Question Paper Title : TAIT_PAPER_2

Date of Exam : 2017-12-12 12:30:00

1	‘नदी पलीकडे हिरवे रान आहे.’ या वाक्यातील विशेषण ओळखा.
	A.नदी
	B.पलीकडे
	C.हिरवे
	D.रान
Answer:	C.हिरवे

For More Info And Videos About TAIT-Exam Syllabus And Other Exam Visit My Channel
TAIT च्या 30 प्रश्नपत्रिका PDF
BADSHAHimp Available Request 9765226781
WWW.YouTube.com/BADSHAHimp
Subscribe My Channel

2

सूचना: प्रत्येक प्रश्नाला एक प्रमुख विधानासोबत चार विधाने आहेत ज्यांच्याखाली A, B, C, आणि D असे चार विधान आहेत. क्रमवार विधानांची जोडी निवडा ज्यामध्ये प्रथम विधान दुसऱ्या विधानाला सुचवते, आणि दोन्ही विधाने तर्किकदृष्ट्या प्रमुख विधानासोबत निगडित असेल.

जर मी पौष्टिक खाल्ले, तर मी स्वस्थ राहणार
A. मी पौष्टिक खाल्ले
B. मी स्वस्थ राहिलो
C. मी पौष्टिक खाल्ले नाही
D. मी निरोगी राहू शकलो नाही

DIRECTIONS: Each question has a main statement followed by four statements labelled A, B, C and D. Choose the ordered pair of statements, where the first statement implies the second, and the two statements are logically consistent with the main statement.

If I eat healthy , I will live healthy
A. I ate healthy
B. I lived Healthy
C. I did not eat healthy
D. I did not live healthy

ہدایت: ہر سوال میں ایک جملہ ہے جسکے بعد چار جملےاے، بی،سی اور ڈی کے نام سے دئے گئے ہیں اسمیں منسلک جوڑیوں کو چنئے۔ جہاں پہلا جملہ دوسرے جملہ کی اور اشارہ کر رہا ہے اور دو جملے منطقی مرکزی بیان کے مطابق ہیں

اگر میں صحتمند کھانا کھاؤں تو صحتمند رہوں گا
Aمیں نے صحتمند کھانا کھایا ۔
Bمیں صحتمند رہا ۔
Cمیں نے صحتمند کھانا نہیں کھایا ۔
Dمیں صحتمند نہیں رہا ۔

A.AB
A.AB
A.AB

B.BD
B.BD
B.BD

C.DA
C.DA
C.DA

D.CD
D.CD
D.CD

For More Info And Videos About TAIT-Exam Syllabus And Other Exam Visit My Channel
TAIT च्या 30 प्रश्नपत्रिका PDF
BADSHAHimp Available Request 9765226781
WWW.YouTube.com/BADSHAHimp
Subscribe My Channel

Answer:	A.AB A.AB A.AB

3	‘पारा चढणे’ या वाक्प्रचाराचा अर्थ काय ?
	A.खूप रागावणे.
	B.ताप येणे.
	C.तापमान वाढणे.
	D.गरमी होणे.
Answer:	A.खूप रागावणे.

4	DIRECTIONS: A sentence with an underlined phrasal verb is given below. Out of the four options, choose the one which can be substituted for the given phrasal Verb. If he thinks he can get away with cheating me, he's very much mistaken.
	A.escape punishment
	B.is rewarded
	C.will be rich
	D.have influence
Answer:	A.escape punishment

5	सूचना: दिलेल्या पर्यायांमधून वेगळे ते बाहेर काढा. DIRECTIONS: Find the odd one out from the given alternatives. سمت: دیے گئے متبادل میں سے بے جوڑ کو تلاش کرو۔
	A.27 A.27 A.27

For More Info And Videos About TAIT-Exam Syllabus And Other Exam Visit My Channel
TAIT च्या 30 प्रश्नपत्रिका PDF
BADSHAHimp Available Request 9765226781
WWW.YouTube.com/BADSHAHimp
Subscribe My Channel

B.37
B.37
B.37

C.47
C.47
C.47

D.67
D.67
D.67

Answer: A.27
A.27
A.27

6 खालीलपैकी अशुद्ध शब्द कोणता ?

A.तल्लख

B.तऱ्हा

C.तल्लीन

D.तबल

Answer: D.तबल

7 सूचना: खालील प्रश्नात कागदाच्या एक तुकड्याला प्रश्नातील आकृती/तीं मध्ये दाखविल्याप्रमाणे घडी घातली आहे. उत्तरादाखल पर्यायांमधून अशी आकृती निवडा जी भोक पडल्यानंतर उलगडलेल्या कागदाचे स्वरूप दाखवेल.

DIRECTIONS: In the following question a piece of paper is folded in the manner shown in the question figure(s). Select the figure out of the answer choices showing the unfolded pattern after the punches (cut).

ہدایات: نیچے دیئے گئے سوالوں میں کاغذ کا ایک ٹکڑا اس طرح جوڑا گیا ہے جیسے سوال کی شکل میں بتایا گیا ہے، دیئے گئے جوابات کے اختیارات میں سے اس طرح انتخاب کیجیئے کہ کٹ لگانے کے بعد بغیر جوڑا ہوا پیٹرن دکھائی دے۔

Question Figures

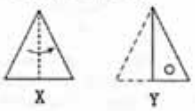

Answer Figures

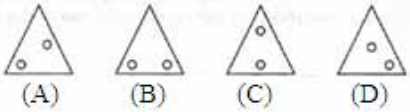

A. (A)

For More Info And Videos About TAIT-Exam Syllabus And Other Exam Visit My Channel
BADSHAHimp TAIT च्या 30 प्रश्नपत्रिका PDF Available Request 9765226781
WWW.YouTube.com/BADSHAHimp Subscribe My Channel

B. (B)

C. (C)

D. (D)

Answer: B. (B)

8 खालील आकृतीमध्ये किती सरळ रेषा आहेत?

How many straight lines are there in the following figure?

نیچے دی ہوئی شکل میں کتنی سیدھی لکیریں ہیں؟

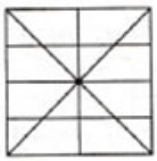

A. 5

B. 10

C. 9

D. 8

Answer: B. 10

9 निर्देश: खालीदिलेल्या अक्षराच्या क्रमात काही अक्षरे गहाळ केली आहेत ते त्या क्रमाने खाली दिलेल्या पर्यायांपैकी एक आहे

aa _ a _ b _ ab aa _

DIRECTIONS: In each of the following letter series, same of the letters are missing which are given in that order as one of the alternatives below it.

aa _ a _ b _ ab aa _

دایت جیل کے حرف سرج میں کوئی حرف گمشدہ ہے آپکو انکی شناخت جیل کے اختیارات سے کرنی ہے

aa _ a _ b _ ab aa _

A.abab
A.abab
A.abab

For More Info And Videos About TAIT-Exam Syllabus And Other Exam Visit My Channel
TAIT च्या 30 प्रश्नपत्रिका PDF
BADSHAHimp Available Request 9765226781
WWW.YouTube.com/BADSHAHimp
Subscribe My Channel

B.baab
B.baab
B.baab

C.baba
C.baba
C.baba

D.abba
D.abba
D.abba

Answer: B.baab
B.baab
B.baab

10 **सूचना:** A, B, C, आणि D नावे दिलेल्या चार आकृतींपैकी तीन आकृत्या मिळून एक श्रेणी तयार होते किंवा त्यांच्यात या ना त्या प्रकारचे साम्य आहे, तर यातील एक आकृती इतरांपेक्षा निराळी आहे. तुम्हाला या चारांपैकी वेगळी (असंबद्ध) असणारी आकृती निवडायची आहे.

DIRECTIONS: Three of the four figures marked A, B, C, and D are in sequence or similarity in some way or the other, while one of them is different from the rest. You have to choose the figure which is different (odd).

ہدایات: A، B، C اور D کا نشان لگی ہوئی چار شکلوں میں سے تین شکلیں ، بالترتیب اور کسی طرح ایک جیسے ہیں، جبکہ ان میں سے ایک باقی سے الگ ہے۔ آپ کو وہ چکل چننا ہے جو الگ ہے؟ (طاق)

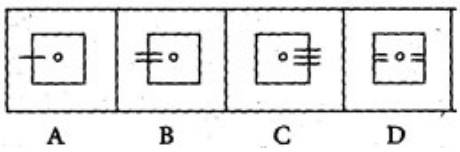

A. (A)

B. (B)

C. (C)

D. (D)

Answer: D. (D)

11 असंभाव्य घटनेची संभाव्यता असते

Probability of an impossible event is

ناممکن واقعہ کی پروبیبلٹی ہے

For More Info And Videos About TAIT-Exam Syllabus And Other Exam Visit My Channel
TAIT च्या 30 प्रश्नपत्रिका PDF
BADSHAHimp Available Request 9765226781
WWW.YouTube.com/BADSHAHimp
Subscribe My Channel

A.1
A.1
A.1

B.0
B.0
B.0

C.1/3
C.1/3
C.1/3

D.निश्चित केलेली नसते
D.not defined
D.غیر متعین

Answer: B.0
B.0
B.0

12 सूचना: खालील प्रश्नांमध्ये दिलेल्या पर्यायांमधून संबंधित अक्षर/शब्द/संख्या निवडा.

निलय: हृदय ::

DIRECTIONS: In the following question, select the related letter/word/number from the given alternatives.

Ventricle: Heart ::

سمت: مندرجہ ذیل سوال میں، دیے گئے متبادل سے متعلقہ حرف/لفظ/نمبر منتخب کریں۔

خوف: دل ::

A.मासा: तळे
A.Fish: Pond
A.مچھلی: تالاب

B.प्रमस्तिष्क: मेंदू
B.Cerebrum: Brain
B.بڑا دماغ: دماغ

C.अस्थिबंधन: रक्त
C.Ligament: Blood
C.رباط: خون

D.महारोहिणी: हात
D.Aorta: Hand
D.شریان کبیر: ہاتھ

For More Info And Videos About TAIT-Exam Syllabus And Other Exam Visit My Channel
TAIT च्या 30 प्रश्नपत्रिका PDF
BADSHAHimp Available Request 9765226781
WWW.YouTube.com/BADSHAHimp
Subscribe My Channel

Answer: B.प्रमस्तिष्क: मेंदू
B.Cerebrum: Brain
B.بڑا دماغ: دماغ

13 रक्ताल्पता व व्यक्तिमत्त्व विकारात कोणते लक्षण समान आहे?

Which symptom is common in anemia and personality disorder?

انیمیا(خون کی کمی) اور شخصیت کی خرابی کی سب سے مشترک علامات کیا ہیں؟

A.निस्तेज त्वचा
A.pale skin
A.جلد کا پیلاپن

B.भूक न लागणे
B.loss of appetite
B.بھوک کی کمی

C.एकाग्रतेचा अभाव
C.lack of concentration
C.توجہ کی کمی

D.केस गळणे
D.hair loss
D.بال کا جھڑنا

Answer: C.एकाग्रतेचा अभाव
C.lack of concentration
C.توجہ کی کمی

For More Info And Videos About TAIT-Exam Syllabus And Other Exam Visit My Channel
TAIT च्या 30 प्रश्नपत्रिका PDF
BADSHAHimp Available Request 9765226781
WWW.YouTube.com/BADSHAHimp
Subscribe My Channel

14 सूचना: खाली दिलेल्या विधान(A) आणि कारण (R) साठी, खालील पैकी योग्य पर्याय निवडा:

विधान (A): भारतीय लष्करांमध्ये नौसेनाधिपती सर्वोच्च संभव स्थान आहे.
कारण (R): भारतीय नौदलाचे मुख्य अधिकारी यांना सामान्य म्हणून ओळखले जाते.

DIRECTION: For the Assertion (A) and Reason (R) given below, choose the correct alternative from the following:

Assertion (A): Admiral is the highest possible rank in Indian Army.
Reason (R): Chief of Staff of Indian Navy is known as General.

ہدایت: نیچے دئیے گئے اسرشن (A) اور (R) وجہ کے لئے، مندرجہ ذیل میں سے صحیح متبادل منتخب کریں:

اسرشن (A): ایڈمائیرل (امیر البحر) ہندوستانی فوج میں سب سے اعلیٰ ممکنہ درجہ ہے۔
وجہ (R): ہندوستانی بحری فوج (نیوی) کے چیف آف اسٹاف کو جنرل کے طور پر جانا جاتا ہے۔

A.दोन्ही (A) आणि (R) सत्य आहेत आणि (R) (A) च योग्य स्पष्टीकरण आहे
A.Both (A) and (R) are true and (R) is the correct explanation of (A)
A.(A) اور (R) دونوں صحیح ہیں اور (R) (A) کی درست وضاحت ہے

B.दोन्ही (A)आणि (R) खरे आहेत, परंतु (R) (A) च योग्य स्पष्टीकरण नाही
B.Both (A) and (R) are true, but (R) is not the correct explanation of (A)
B.(b) (A) اور (R) دونوں صحیح ہیں، لیکن (R) (A) کی درست وضاحت نہیں ہے

C.(A) सत्य आहे, परंतु (R) खोटे आहे
C.(A) is true, but (R) is false
C.(A) صحیح ہے، لیکن (R) غلط ہے

D.(A) खोटे आहे, परंतु (R) सत्य आहे
D.(A) is false, but (R) is true
D.(A) غلط ہے، لیکن (R) صحیح ہے

Answer: B.दोन्ही (A)आणि (R) खरे आहेत, परंतु (R) (A) च योग्य स्पष्टीकरण नाही
B.Both (A) and (R) are true, but (R) is not the correct explanation of (A)
B.(b) (A) اور (R) دونوں صحیح ہیں، لیکن (R) (A) کی درست وضاحت نہیں ہے

15 दृक-श्राव्य सहायक — शी संबंधित आहेत

Audio-visual aids are related to—

آڈیو بصری امدادی آلات متعلق ہیں-

A.संकल्पनात्मक उपकरणे
A.Perceptual apparatus
A.نظریاتی سازوسامان

B.श्रवणयोग्य उपकरणे
B.Audible apparatus
B.آڈٹیبل سازوسامان

C.वरील दोन्ही
C.Both of the above
C.مندرجہ بالا دونوں

D.वरीलपैकी कोणतेही नाही
D.None of the above
D.اوپر سے کوئی بھی نہیں

Answer:

C.वरील दोन्ही
C.Both of the above
C.مندرجہ بالا دونوں

16

भारताकडे _____च्या मदतीने बुलेट ट्रेन असणार आहे–

India will have its bullet train with the help of –

ہندوستان کے پاس _____ کی مدد سے بلیٹ ٹرین ہوگی

A.जपान
A.Japan
A.جاپان

B.चीन
B.China
B.چین

C.जर्मनी
C.Germany
C.جرمنی

D.इस्राएल
D.Israel
D. اسرائیل

Answer:

A.जपान
A.Japan
A.جاپان

17	असे कोणते प्राणी आहेत जे स्वतःचे अन्न बनवतात,त्यांना म्हणतात What are the organisms that make their own food known as? وہ کونسے آرگانزم ہیں جو اپنا کھانا خود بناتے ہیں
	A.ऑटोट्रॉफ A.Autotroph A.آٹو ٹرافس
	B.सेप्प्रोफाईट B.Saprophyte B.سیپرو فائٹس
	C.हेटेरेत्रोफ C.Heterotroph C.ہیٹرو ٹرافس
	D.इन्सेक्टीवोरोस D.Insectivorous D.ینسیکٹی ورس
Answer:	A.ऑटोट्रॉफ A.Autotroph A.آٹو ٹرافس

18 निर्देश: खालील अक्षर-संख्याच्या व्यवस्थेचे निरीक्षण करा आणि खालील प्रश्नांची उत्तरे द्या:

B 8 4 C R M 9 P D K W F A 2 E J 7 X U Q H L T Y 6 G S

वरील क्रम संदर्भात पुढील क्रमा मध्ये खालीलपैकी कोणता पर्याय (?) प्रश्नचिन्हाच्या जागी येईल?

BRC, 8MR, 49M, ?

DIRECTION: Study the following letter-number arrangement and answer the questions given below:

B 8 4 C R M 9 P D K W F A 2 E J 7 X U Q H L T Y 6 G S

Which of the following will come in place of the question mark (?) in the following sequence with reference to the above arrangement?

BRC, 8MR, 49M, ?

ہدایت جیل می دی گی حرف اور نمبرس کی ترتیب پڑھئے اور سوالونکے جوا ب دو

B 8 4 C R M 9 P D K W F A 2 E J 7 X U Q H L T Y 6 G S

اپر کے لائیں کا جایجا لیا جائے تو نیچے کے ترتیب مے سوالیہ نشان کی جگہ کیا ایگا

BRC, 8MR, 49M,

A.CNP
A.CNP
A.CNP

B.4PN
B.4PN
B.4PN

C.CPN
C.CPN
C.CPN

D.यांपैकी कोणतीही नाही
D.None of these

Answer: C.CPN
C.CPN
C.CPN

19 दूषित पाणी पिण्यानी खालीलपैकी कोणत्या रोगाचा प्रसार होतो?

Which of the following diseases spread through contaminated drinking water?

مندرجہ ذیل بیماریوں میں سے کون سی آلودہ پانی پینے کی وجہ سے پھیلتی ہے ؟

A.एड्स
A.AIDS
A. ایڈز

B.टायफायड
B.Typhoid
B. ٹائیفائیڈ

C.अनेमिया
C.Anaemia
C. انیمیا

D.टेनस
D.Tetanus
D. تشنج

Answer: B.टायफायड
B.Typhoid
B. ٹائیفائیڈ

20 सूचना: अर्थपूर्ण परिच्छेद निर्माण करण्यासाठी, खाली दिलेली (P), (Q) (R), (S) आणि (T) ही पाच वाक्ये योग्य अनुक्रमाने पुनर्रचना करा; त्यांनतर खालील प्रश्नांची उत्तर द्या.

P. उंदराच्या परिश्रमाने तो मुक्त झाला होता.
Q. तो जाळ्यात अडकला होता.
R. सिंहाला आपल्या क्षमतेचा गर्व होता.
S. तो जाळ्यातून सुटू शकला नाही.
T. त्याने उंदराच्या कमजोरीला तुच्छ लेखले.

पुनर्रचना केल्यानंतर खालीलपैकी कोणते वाक्य तिसरे असेल?

DIRECTION: Rearrange the following five sentences (P), (Q), (R), (S) and (T) in the proper sequence to form a meaningful paragraph; then answer the questions given below them.
P. He was set free by the exertions of the mouse.
Q. He was caught in a net.
R. A lion was proud of his strength.
S. He could not escape from the net.
T. He despised the weakness of the mouse.

Which of the following should be the THIRD sentence after rearrangement?

ہدایات: ان پانچ جملوں (P)، (Q)، (R)، (S) اور (T) کو با معنی پیرا بنانے کے لئے دوبارہ ترتیب دیجئے، پھر نیچے دے گئے سوالوں کے جواب دیجئے

P. اسکو چوہوں کی سرگرمی سے آزاد کیا گیا.
Q. اسکو جال میں فنسایا گیا.
R. شیر کو اپنی طاقت پر گرور تھا.
S. وو جال سے بھاگ نہیں سکھتا . .
T. اسکو چوہوں کی کمزوری سے نفرت تھی.

دوبارہ ترییب دینے کے بعد کون سا جملہ تیسرا ہونا چاہیے؟

A.Q
A.Q
A.Q

B.S
B.S
B.S

C.P
C.P
C.P

D.T
D.T
D.T

Answer: A.Q
A.Q
A.Q

21 निर्देश: खालील प्रश्नामध्ये, चार शब्द दिले आहेत. जर त्यांची शब्दकोशामधील वर्णाक्षरानुसार मांडणी केली तर त्यांच्यापैकी कोण शेवटी येईल?

DIRECTIONS: In the following question, four words are given. Which of them will come in the last but one if all of them are arranged alphabetically as in a dictionary?

ہدایات: مندرجہ ذیل سوال میں، چار الفاظ دیےگیے ہیں۔ اگر ان سب کو ابجدی طور سے اسی طرح مرتب کیا جاتا ہے جیسا کی لغت میں ہوتا ہے تو ان میں کا کون ماقبل آخر آئیگا؟

A.Sentimentalize
A.Sentimentalize
A.Sentimentalize

B.Sentence
B.Sentence
B.Sentence

C.Sentinel
C.Sentinel
C.Sentinel

D.Sentimentally
D.Sentimentally
D.Sentimentally

Answer: D.Sentimentally
D.Sentimentally
D.Sentimentally

22 प्रियंका तिच्या घरापासून पश्चिम दिशेने चालत गेली. 25 मीटर अंतर चालत गेल्यावर ती उजवीकडे वळली आणि 10 मीटर चालत गेली. ती पुन्हा एकदा उजवीकडे वळली आणि 15 मीटर चालत गेली. ती आता तिच्या प्रारंभ बिंदूपासून कोणत्या दिशेला आहे?

Priyanka started from her house towards west. After walking a distance of 25 m, she turned to the right and walked 10 m. She then again turned to the right and walked 15 m. In which direction is she from her starting point?

پرینکا نے اپنے گھر سے مغرب کی طرف چلنا شروع کیا۔ 25 میٹر کے فاصلے تک چلنے کے بعد، وہ دائیں مڑی اور 10 میٹر تک چلی۔ پھر وہ دوبارہ دائیں مڑی اور میٹر تک چلی۔ اپنے شروعاتی نقطے سے وہ کس سمت میں ہے؟

A.उत्तर-पश्चिम
A.North-West
A. شمال-مغرب

B.दक्षिण-पश्चिम
B.South-West
B. جنوب-مغرب

C.दक्षिण-पूर्व
C.South-East
C. جنوب-مشرق

D.उत्तर
D.North
D. شمال

Answer: A.उत्तर-पश्चिम
A.North-West
A. شمال-مغرب

23 अशी तबकडी ज्यावर आपण माहिती साठवतो—

A disk on which you store information—

ایک ڈسک جس پر آپ معلومات جمع کرتے ہیں۔۔۔

A.प्लेट
A.Plate
A.پلیٹ

B.डेटा डिस्क
B.Data disc
B.ڈیٹا ڈسک

C.पेपर डिस्क
C.Paper disk
C.پیپر ڈسک

D.टिव्ही डिस्क
D.TV disk
D.ٹی وی ڈسک

Answer: B.डेटा डिस्क
B.Data disc
B.ڈیٹا ڈسک

24 सूचना: खालील माहितीचा अभ्यास करुन दिलेल्या प्रश्नांची उत्तरे द्या.
A, B, C, D, E, F, G आणि H हे 8 मित्र एका वर्तुळामध्ये केंद्रासमोर बघत बसलेले आहेत. AC, DG, HE आणि FB एकमेकांच्या बाजूला बसलेले आहेत. A देखील H च्या बाजूला बसलेला आहे. B हा H च्या उजवीकडून दुसरा आहे. E हा C च्या उजवीकडून तिसरा आहे.
खालील जोड्यांमध्ये कोण एकमेकांच्या बाजूला बसू शकलेले असू शकत नाही?

DIRECTIONS: Study the following information to answer the given questions.
There are 8 friends A, B, C, D, E, F, G and H seated in a circle facing the centre. AC, DG, HE and FB are seated adjacent to each other. A is also seated adjacent to H. B is 2nd to the right of H. E is 3rd to the right of C.
Who amongst the following pairs may not be seated adjacent to each other?

ہدایات: دیے گئے سوالات کے جواب دینے کے لیے مندرجہ ذیل معلومات کا مطالعہ کریں۔
8 دوست G، F، E، D، C، B، A اور H ایک دائرے میں مرکز کا رخ کیے ہوئے بیٹھے ہیں۔ HE، DG، AC اور FB ایک دوسرے سے ملے ہوئے بیٹھے ہیں۔ A ، H کے بغل میں بھی بیٹھا ہے۔ B کے دائیں سے دوسرا ہے۔ E ، C کے دائیں سے تیسرا ہے۔
مندرجہ ذیل جوڑوں میں سے کون ایک دوسرے کے ساتھ بیٹھا نہیں ہو سکتا ہے؟

A.AH
A.AH
A.AH

B.DC
B.DC
B.DC

C.EB
C.EB
C.EB

D.निर्धारित केले जाऊ शकत नाही.
D.Cannot be determined
D.تعین نہیں کیا جا سکتا ہے

Answer: B.DC
B.DC
B.DC

25 निर्देश: खाली दिलेले प्रश्न वर्ण मालिकेवर आधारित आहेत. या प्रत्येक मालिकेत, काही अक्षरे गहाळ आहेत. योग्य पर्याय निवडा पाच पेक्षा अधिक अक्षरे गहाळ असल्यास, मालिकेतील शेवटचे पाच अक्षरे निवडा.

cde - ghi - - l - - - - -

DIRECTION: Questions given below are based on the letter series. In each of these series, some letters are missing. Select the correct alternative. If more than five letters are missing, select the last five letters of the series:

cde - ghi - - l - - - - -

ہدایت نیچے دے ہے سوالات حرف سرج پر مشتمل ہیں . ہر میں کہیں حرف گمشدہ ہے . سہی اختیارات کو چنے . اگر پچ حرف گنمام ہو تو آخری پانچ حرفونکو چنے

cde - ghi - - l - - - - -

A.rstuv
A.rstuv
A.rstuv

B.abxzy
B.abxzy
B.abxzy

C.abxyz
C.abxyz
C.abxyz

D.abzyx
D.abzyx
D.abzyx

Answer: A.rstuv
A.rstuv
A.rstuv

26 एखादी व्यक्ती बालपण व प्रौढत्वादरम्यानच्या स्थित्यंतरात असल्यास ती यात आहे

An individual is transition state between childhood and adulthood he is an

جب کوئی بچپن اور سن بلوغ کی منتقلی کی حالت میں ہوتا ہے تو وہ کیا ہوتا ہے

A.कुमारवय
A.Adolescent
A.عنوان شباب

B.शालापूर्व
B.preschool
B.پری اسکول

C.पूर्वसक्रिय वय
C.preoperational age
C.پری آپریشنل عمر

D.वरीलपैकी कोणतेही नाही
D.none of the above
D.درج بالا میں سے کوئی نہیں

Answer: A.कुमारवय
A.Adolescent
A.عنوان شباب

27 ट्रोबेलचे शिक्षण क्षेत्रातील सर्वांत मोठे योगदान म्हणजे त्याने याचा केलेला विकास

Trobel’s most important contribution to education was his development of

تعلیم کے میدان میں ٹروبل کا سب سے عظیم کارنامہ کو تیار کرنا تھا

A.शिशुवर्ग
A.kindergarten
A.کنڈرگارٹن

B.व्यावसायिक शाळा
B.vocational school
B.ووکیشنل اسکول

C.सार्वजनिक शाळा
C.public school
C.پبلک اسکول

D.लॅटीन शाळा
D.latin school
D.لاطینی اسکول

Answer: A.शिशुवर्ग
A.kindergarten
A.کنڈرگارٹن

28

खालील आकृतीमध्ये w चे मूल्य काय आहे?
In the given figure below, what is the value of w?
مندرجہ ذیل دی گئی شکل میں، W کی قدر کیا ہے؟

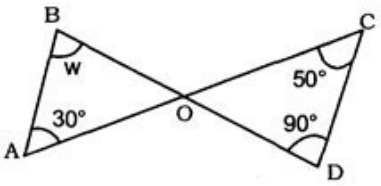

(A) 100°

(B) 110°

(C) 120°

(D) 130°

Answer: (B) 110°

29

विधान:
भारतातील विद्यार्थी आत्महत्यांची संख्या चिंताजनकपणे वाढत आहे.

कृतीचा कोर्स:
I. वार्षिक परीक्षा रद्द करा.
II. सर्व कुलगुरूंना निलंबित करा.

Statement:
Number of student suicides in India are alarmingly increasing.

Course of actions:
I. Cancel annual examinations.
II. Suspend all the Vice Chancellors.

بیان:
انڈیا میں خود کشی کرنے والے طلباء کی تعداد خطرناک حد تک بڑھ رہی ہے۔

لائحہ عمل:
I۔ سالانہ امتحانات کینسل کر دیں
II۔ تمام وائس چانسلرز کو معطل کر دیں ۔

A.फक्त I अनुसरून आहे
A.Only I follows
A. صرف I لاگو ہو گا۔

B.फक्त II अनुसरण करते आहे
B.Only II follows
B. صرف II لاگو ہو گا۔

C.एकतर I किंवा II अनुसरून आहे
C.Either I or II follows
C.I یا II میں سے ایک لاگو ہو گا۔

D.I किंवा II दोन्हीपैकी काहीही अनुसरण करत नाही
D.Neither I nor II follows
D. I اور II میں سے کوئی بھی لاگو نہیں ہو گا۔

Answer:

D.I किंवा II दोन्हीपैकी काहीही अनुसरण करत नाही
D.Neither I nor II follows
D. I اور II میں سے کوئی بھی لاگو نہیں ہو گا۔

30

स्वमग्नतेची चिन्हे या वयोगटात प्रथम दिसून येतात.

Autistic signs are first in age group.

پہلی خود فکری کی علامات عمر کے کس گروپ میں ہوتی ہے

A.4-6
A.4-6
A.4-6

B.1-2
B.1-2
B.1-2

C.2-3
C.2-3
C.2-3

D.5-7
D.5-7
D.5-7

Answer:

B.1-2
B.1-2
B.1-2

31 सूचना : खालील प्रत्येक प्रश्नात दोन विधाने I आणि II दिलेले आहेत. हे विधान एकतर स्वतंत्र कारण असू शकतात किंवा स्वतंत्र कारणांचे परिणाम असू शकतात. यांपैकी एक विधान इतर विधानाचा परिणाम असू शकतो. दोन्ही विधाने वाचा आणि खालीलपैकी कोणत्या उत्तराचा पर्याय या दोन्ही विधानांमधील संबंधांचे वर्णन करतो ते ठरवा.

विधान :
I. परिसरात मलेरियाच्या घटना वाढत आहे.
II. परिसरात अस्वच्छ पाण्याची समस्या वाढत आहे.

DIRECTIONS: Below in each question are given two statements I and II. These statements may be either independent causes or may be effects of independent causes. One of these statements may be the effect of the other statement. Read both the statements and decide which of the following answer choice correctly depicts the relationship between these two statements.

Statements:
I. The cases of malaria are increasing in the locality.
II. The problem of stagnant water is increasing in the locality.

ہدایات: نیچے ہر سوال میں دو بیانات I اور II آ تو یہ بیانات یا تو آزاد وجوہات کے اثرات ہو سکتے ہیں۔ انہیں گئے ہیں۔ دیے گئے بیانات میں سے ایک بیان دوسرے کا اثر ہو سکتا ہے۔دونوں بیانات پڑھیں اور فیصلہ کریں کہ نیچے دیے گئے کس جواب کا انتخاب ان دونوں بیانات کے در میان تعلق کو ٹھیک سے ظاہر کرتا ہے۔

بیانات:
I – علاقے میں ملیریا کے کیسز میں اضافہ ہو رہا ہے۔
II - علاقے میں کھڑے پانی کا مسئلہ بڑھ رہا ہے۔

A.विधान I कारण आहे आणि विधान II त्याचा परिणाम आहे;
A.Statement I is the cause and statement II is its effect;
A.بیان نمبر I وجہ ہے اور بیان نمبر II اس کا اثر ہے۔

B.विधान II कारण आहे आणि विधान I त्याचा परिणाम आहे;
B.Statement II is the cause and statement I is its effect;
B.بیان نمبر II وجہ ہے اور بیان نمبر I اس کا اثر ہے۔

C.विधान I आणि II दोन्ही स्वतंत्र कारणे आहेत;
C.Both the statements I and II are independent causes;
C.دونوں بیانات نمبر I اور نمبر II آزاد وجوہات ہیں۔

D.विधान I आणि II दोन्ही स्वतंत्र कारणांचे परिणाम आहेत;
D.Both the statements I and II are effects of independent causes;
D.دونوں بیانات نمبر I اور نمبر II آزاد وجوہات کے اثرات ہیں۔

Answer: B.विधान II कारण आहे आणि विधान I त्याचा परिणाम आहे;
B.Statement II is the cause and statement I is its effect;
B.بیان نمبر II وجہ ہے اور بیان نمبر I اس کا اثر ہے۔

32 निर्देश: खालील प्रश्न दिलेल्या शब्दांवर आधारित आहेत.

Upper/ Minority/ Sentinel/ Sponsor

जर दिलेल्या शब्दांमध्ये स्वरांना मागील अक्षराने बदलले आणि व्यंजनाची जागा त्याच्या पुढच्या अक्षराने बदलली तर किती शब्दान मध्ये किमान एक स्वर राहील.

DIRECTIONS: Following question is based on the given words.

Upper/ Minority/ Sentinel/ Sponsor

If in the given words vowels are replaced with its previous letter and Consonant are replaced with its next letter then how many words have at least one vowel?

ہدایت جیل کے سوال دے ہے لفجونپر مشتمل ہیں

Upper/ Minority/
Sentinel/ Sponsor

اگر ان لفجوں مے ہر واول کو انگریجی حرف تہجیبی کے اگلے حرف سے بدلہ جائے اور ہرکونسونانٹ کو انگریجی حرف تہجیبی کےپچھلے حرف سے بدلہ جائے تو صرف یک واول والے کتنے لفج ہونگے؟

A.एक
A.One
A.ایک

B.दोन
B.Two
B.دو

C.तीन
C.Three
C.تین

D.चार
D.Four
D.چار

Answer: C.तीन
C.Three
C.تین

33 कापुस रासायनिक दृष्ट्या काय आहे?

What is cotton chemically?

کپاس، کیمیائی طور پر کیا ہے؟

A.प्रोटिन
A.Protein
A. پروٹین

B.कार्बोहाइड्रेट
B.Carbohydrate
B. کاربوہائڈریٹ

C.मिनेरल
C.Mineral
C. منرل

D.चरबी
D.Fats
D. وسا

Answer: B.कार्बोहाइड्रेट
B.Carbohydrate
B. کاربوہائڈریٹ

34 सूचनाः यापैकी कोणती आकृती प्रामाणिक, बुद्धिमान आणि गरीब यांच्या दरम्यानचे नाते दर्शवते?

DIRECTIONS: Which diagram represents the relationship among Honest, Intelligent and Poor?

ہدایات: کون سی ڈایاگرام اعزاز، ذہین اور غریب کے درمیان تعلقات کی نمائندگی کرتی ہے؟

(A) 

(B) 

(C) 

(D) 

Answer: (A) 

35 सूचना: खाली दिलेल्या प्रश्नात एक विधान आहे ज्याचे I आणि II असे दोन निष्कर्ष त्याखाली अंकित केलेले आहेत. या आधारे सर्वात योग्य पर्याय निवडा.

विधान:
जगजीत असे समजतो की अनुउर्जा केंद्रे पर्यावरणासाठी धोकादायक आहेत. जगजीत त्याच्या जिल्ह्यात अनुउर्जा केंद्र स्थापन करण्याच्या सरकारच्या निर्णयाचा निषेध करतो आहे.

निष्कर्ष:
I. भारताच्या विकासाच्या कार्यात अडथळा आणत असल्याने जगजीत देशद्रोही आहे.
II. भारतीय सरकारला विरोध करत असल्याने जगजीत देशद्रोही आहे.

DIRECTIONS: The question below has a statement followed by two conclusions numbered I and II. Based on this choose the option that is most suitable.

Statement:
Jagjit considers nuclear plants as harmful to environment. Jagjit is protesting against the decision of Indian Government allowing nuclear power stations in his district.

Conclusions:
I. Jagjit is a traitor to India as he is opposing the development of India.
II. Jagjit is a traitor to India as he is opposing theGovernment of India.

ہدایات: نیچے دیے گئے سوال میں ایک بیان کے بعد دو نتائج I اور II دیے گئے ہیں۔ اس کی بنیاد پرانتہائی موزوں آپشن کا انتخاب کیجیے۔

بیان:
جگجیت جوہری پلانٹس کو ماحولیات کے لئے نقصان دہ سمجھتاہے. جگجیت انڈیین حکومت کے فیصلے کے خلاف احتجاج کررہا ہے جس کے مطابق اس کے ضلع میں جوہری بجلی گھروں کی اجازت دی گئی ہے.

نتیجے:
I. جگجیت انڈیا کا غدار ہے کیونکہ وہ انڈیا کی ترقی کی مخالفت کر رہا ہے.
II. جگجیت انڈیا کا غدار ہے کیونکہ وہ انڈیا کی حکومت کی مخالفت کر رہا ہے.

A.केवळ निष्कर्ष क्रमांक I विधानास अनुसरून आहे
A.Only Conclusion I follows
A. صرف نتیجہ I لاگو ہو گا۔

B.केवळ निष्कर्ष क्रमांक II विधानास अनुसरून आहे
B.Only Conclusions II follows
B. صرف نتیجہ II لاگو ہو گا۔

C.निष्कर्ष क्रमांक I किंवा II अनुसरून आहे.
C.Either I or II follows
C. I یا II میں سے ایک لاگو ہو گا۔

D.कोणताही निष्कर्ष अनुसरून नाही
D.Neither I nor II follow
D. I اور II میں سے کوئی بھی لاگو نہیں ہو گا۔

Answer: D.कोणताही निष्कर्ष अनुसरून नाही
D.Neither I nor II follow
D. I اور II میں سے کوئی بھی لاگو نہیں ہو گا۔

36 खाली दिलेल्या शब्दांची अर्थपूर्ण क्रमाने मांडणी करा.

1. डॉक्टर
2. ताप
3. औषधचिठ्ठी
4. निदान
5. औषध

Arrange the words given below in a meaningful sequence.

1. Doctor
2. Fever
3. Prescribe
4. Diagnose
5. Medicine

ایک معنی خیز ترتیب میں نیچے دیےگیے الفاظ کو مرتب کریں.

1. ڈاکٹر
2. بخار
3. بیان کریں
4. تشخیص
5. دوا

A.1, 4, 3, 2, 5
A.1, 4, 3, 2, 5
A.1, 4, 3, 2, 5

B.2, 1, 3, 4, 5
B.2, 1, 3, 4, 5
B.2, 1, 3, 4, 5

C.2, 1, 4, 3, 5
C.2, 1, 4, 3, 5
C.2, 1, 4, 3, 5

D.2, 4, 3, 5, 1
D.2, 4, 3, 5, 1
D.2, 4, 3, 5, 1

Answer: C.2, 1, 4, 3, 5
C.2, 1, 4, 3, 5
C.2, 1, 4, 3, 5

37 निर्देश: पुढील प्रश्नांपैकी प्रत्येक प्रश्नात एक संख्या गहाळ आहे. मालिकेचा नमुना समजून घ्या आणि योग्य संख्या निवडा.
2, 6, 12, 20, ..., 42, 56, 72, 90

DIRECTION: In each of the following questions, one number is missing in the series. You have to understand the pattern of the series and insert the number.

2, 6, 12, 20, ..., 42, 56, 72, 90

ہدایت جیل کے ہر سوال میں سرج کا ایک نمبر گمشدہ ہے . آپکو اس سرج کو سمجھنا ہے. اور گمشدہ نمبر کو یہا کھوجنا ہے

2, 6, 12, 20, ..., 42, 56, 72, 90

A.20
A.20
A.20

B.21
B.21
B.21

C.30
C.30
C.30

D.12
D.12
D.12

Answer: C.30
C.30
C.30

38 सूचना: खालील आकृतीत, त्रिकोण शिक्षक दर्शवतो, वर्तुळ विद्यार्थी दर्शवते आणि आयत कलाकार दर्शवतो. विद्यार्थी आणि कलाकार असलेले शिक्षक कोणती संख्या दर्शवते?

DIRECTIONS: In the following figure, the triangle represents Teachers, the circle represents Students and the rectangle represents Actors. Which number represents Teachers who are also Students and Actors?

ہدایت: مندرجہ ذیل تصویر میں، مثلث اساتذہ کی نمائندگی کرتا ہے، دائرہ کار طالب علموں کی نمائندگی کرتا ہے اور آئتاکار اداکاروں کی نمائندگی کرتا ہے. کونسا نمبر اساتذہ کی نمائندگی کرتا ہے جو طالب علم اور اداکار بھی ہیں؟

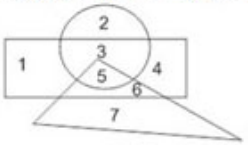

A. 4

B. 5

C. 7

D. 6

Answer: D. 6

39 खालीलपैकी कोणते विद्युयतचुंबकाच्या अंतरकासाठी सर्वात योग्य आहे?

Which one of the following is most suitable for the core of the electromagnet?

الیکٹرومینجمینٹ کی بنیاد کے لئے مندرجہ ذیل میں سے کون سب سے زیادہ مناسب ہے؟

A.हवा
A.Air
A.ہوا

B.स्टील
B.Steel
B.اسٹیل

C.कु-नि- अलॉय
C.Cu-Ni-Alloy
C.کو-نی-الوائے

D.मऊ लोह
D.Soft Iron
D.سافٹ آئرن) نرم لوہا)

Answer: D.मऊ लोह
D.Soft Iron
D.سافٹ آئرن) نرم لوہا)

40 जीएसएम, सीडीएमए, जीपीआरएस या _____च्या संदर्भातील संकल्पना आहेत –

GSM, CDMA, GPRS are terms in the reference of –

جی ایس ایم، سی ڈی ایم اے، جی پی آر ایس اصطلاحات _____ کے حوالے میں ہیں

A.मिसाईल तंत्रज्ञान
A.Missile technology
A.میزائل ٹکنالوجی

B.अवकाश उपग्रह तंत्रज्ञान
B.Space Satellite technology
B.اسپیس سیٹیلائٹ ٹکنالوجی

C.मोबाईल फोन तंत्रज्ञान
C.Mobile phone technology
C.موبائل فون ٹکنالوجی

D.यांपैकी कोणतेही नाही
D.None of these
D.ان میں سے کوئی نہیں

Answer: C.मोबाईल फोन तंत्रज्ञान
C.Mobile phone technology
C.موبائل فون ٹکنالوجی

41 सूचना: दिलेल्या पर्यायांमधून योग्य पर्याय निवडा.
एका घनावर चार समानांतर काप केल्यावर किती लहान तुकडे मिळतात?

DIRECTION: Select the correct alternative from the given choices.
How many smaller pieces are obtained by making four parallel cuts on a cube?

ہدایت: دیئے گئے اختیارات میں سے صحیح متبادل کا انتخاب کیجئے
ایک کیوب پر 4 مساوی کٹ لگانے سے کتنےچھوٹے ٹکڑے حاصل ہوتے ہیں؟

A.4
A.4
A.4

B.5
B.5
B.5

C.6
C.6
C.6

D.3
D.3
D.3

Answer: B.5
B.5
B.5

42	प्रश्नासाठी सूचना: खालील मालिका पूर्ण करा. E, A, _____, O, I DIRECTION: Complete the following series. E, A, _____, O, I سوال کے لیے ہدایت:مندرجہ ذیل سیریز کو مکمل کریں۔ E, A, _____, O, I
	A.E A.E A.E
	B.U B.U B.U
	C.X C.X C.X
	D.V D.V D.V
Answer:	B.U B.U B.U
43	92, 88, 84, … मालिकेतील कितव्या अनुक्रमाचे पद 0 आहे? Which term of the series 92, 88, 84, … is 0? 92, 88, 84, … 0 اس سرج کی کتوی ٹرم سفر ہے؟
	A.24वे A.24th A.24واں
	B.27वे B.27th B.27واں

C.23वे
C.23th
C.23واں

D.28वे
D.28th
D.28واں

Answer: A.24वे
A.24th
A.24واں

44 काय मुलाचें लिंग निर्धारित करते?

What determines the sex of a child?

کسی بچے کے جنس کا پتہ کس چیز سے لگتا ہے؟

A.वडिलांचे गुणसूत्र
A.Chromosomes of the father
A.باپ کے کروموزوم

B.आईचे गुणसूत्र
B.Chromosomes of the mother
B.ماں کے کروموزوم

C.पालकांचे आरएच फॅक्टर
C.Rh factor of the parents
C.والدین کے آر ایچ (Rh) فیکٹر

D.वडिलांचे रक्तगट
D.Blood group of the father
D.باپ کے خون کا گروپ

Answer: A.वडिलांचे गुणसूत्र
A.Chromosomes of the father
A.باپ کے کروموزوم

45 पेक्टिन यामध्ये आढळते-

Pectin is found in

پیکٹن پایا جاتا ہے

A.सर्व अन्न वनस्पती
A.All food plants
A. تمام کھانے کے پودوں میں

B.निवडूंग
B.Cactus
B. کیکٹس میں

C.मुख्यतः फळ
C.Mainly Fruits
C.عام طور پر پھلوں میں

D.तृणधान्य
D.Cereals
D.اناج

Answer:

C.मुख्यतः फळ
C.Mainly Fruits
C.عام طور پر پھلوں میں

46

कार्य-विश्लेषण —च्या संबंधाने पार पाडले जाऊ शकते

Task-analysis can be carried out in relation to—

—ٹاسک تجزیہ-سلسلے میں کیا جا سکتا ہے

A.पुस्तकातील सामग्री
A.Content of the books
A.کتابوں کا مواد

B.रोजगार पुरवण्यासाठी कामे
B.Jobs for providing employment
B.روزگار فراہم کرنے کے لئے ملازمت

C.शिकण्यासाठी कौशल्ये
C.Skills to be learned
C.سیکھنے کے لئے مہارتیں

D.वरील सर्व
D.All of the above
D.مذکورہ تمام

Answer:

D.वरील सर्व
D.All of the above
D.مذکورہ تمام

47 एक काम P 8 दिवसांत, Q 12 दिवसांत आणि R 16 दिवसांत पूर्ण करतो. दर दुसऱ्या दिवशी P आणि Q ची मदत मिळाली तर, R हे काम किती दिवसांमध्ये पूर्ण करू शकतो?

P can do a job in 8 days, Q in 12 days and R in 16 days. How many days are required to finish the work by R, if he is assisted by P and Q on every second day?

ہر Q اور Pکو کتنے دن درکار ہیں کام کو ختم کرنے کے لیے، اگر Rدن میں -Rدن میں اور Q16ایک کام 8 دن میں کرتا ہے، P 12 دوسرے دن اس کی مدد کریں؟

A.7
A.7
A.7

B.10
B.10
B.10

C.4
C.4
C.4

D.6
D.6
D.6

Answer: D.6
D.6
D.6

48 सूचना: प्रत्येक प्रश्नाला एक प्रमुख विधानासोबत चार विधाने आहेत ज्यांच्याखाली A, B, C, आणि D असे चार विधान आहेत. क्रमवार विधानांची जोडी निवडा ज्यामध्ये प्रथम विधान दुसऱ्या विधानाला सुचवते, आणि दोन्ही विधाने तर्किकदृष्ट्या प्रमुख विधानासोबत निगडित असेल.

तो एकतर साक्षर आहे किंवा निरक्षर आहे.
A. तो साक्षर आहे.
B. तो साक्षर नाही.
C. तो निरक्षर आहे.
D. तो निरक्षर नाही.

DIRECTIONS: Each question has a main statement followed by four statements labelled A, B, C and D. Choose the ordered pair of statements, where the first statement implies the second, and the two statements are logically consistent with the main statement.

He is either literate or illiterate
A. He is literate
B. He is not literate
C. He is illiterate
D. He is not illiterate

ہدایت: ہر سوال میں ایک جملہ ہے جسکے بعد چار جملےاے، بی،سی اور ڈی کے نام سے دئے گئے ہیں اسمیں منسلک جوڑیوں کو چنئے۔ جہاں پہلا جملہ دوسرے جملہ کی اور اشارہ کر رہا ہے اور دو جملے منطقی مرکزی بیان کے مطابق ہیں

وہ یا تو پڑھا لکھا ہے یا ان پڑھ
A۔ وہ پڑھا لکھا ہے
B۔ وہ پڑھا لکھا نہیں ہے
C۔ وہ ان پڑھ ہے
D۔ وہ ان پڑھ نہیں ہے

A.AC
A.AC
A.AC

B.DA
B.DA
B.DA

C.CB
C.CB
C.CB

D.AB
D.AB
D.AB

Answer: B.DA
B.DA
B.DA

49 सूचना: दिलेल्या पर्यायांमधून वेगळे ते बाहेर काढा.

DIRECTIONS: Find the odd one out from the given alternatives.

سمت: دیے گئے متبادل میں سے بے جوڑ کو تلاش کرو۔

A.टोपली
A.Basket
A.ٹوکری

B.वाडगे
B.Bowl
B.پیالہ

C.बॅग
C.Bag
C.تھیلا

D.सुरी
D.Knife
D.چاقو

Answer: D.सुरी
D.Knife
D.چاقو

50 **सूचना: खालील प्रश्नात एक उघडलेला फासा दाखविला आहे. दिलेल्या पर्यायांपैकी कोणता पर्याय Z च्या समोरील बाजूवर येईल?**

DIRECTIONS: In the following question an unfolded dice is given. From the given alternatives which of the following will be opposite of Z?

ہدایات: دیئے گئے سوال میں ایک بغیر فولڈ کیا ہو پاسہ دیا گیا ہے ۔ دیئے گئے متبادلات میں سے کونسا نیچے والا پاسہ Z کی اپوسٹ ہوگا ہوں گا؟

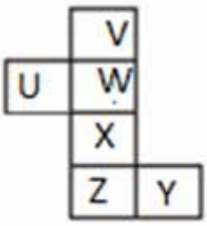

A. U

B. W

C. Y

D. V

Answer: B. W

51

जर $X+\cfrac{1}{1+\cfrac{1}{3+\cfrac{1}{4}}}=4$, तर X = ?

If $X+\cfrac{1}{1+\cfrac{1}{3+\cfrac{1}{4}}}=4$, then X = ?

X =? تو $X+\cfrac{1}{1+\cfrac{1}{3+\cfrac{1}{4}}}=4$ اگر

A. 3

B. 4

C. 5

D. यांपैकी कोणतेही नाही

None of these

کوئی نہیں

Answer: D. यांपैकी कोणतेही नाही

None of these

کوئی نہیں

52 सूचना: दोन विधाने आणि त्यानंतर चार निष्कर्ष, I, II, III आणि IV दिले आहेत. ही विधाने सामान्यतः ज्ञात वस्तुस्थितीपेक्षा भिन्न असली तरी सत्य आहेत असे समजा. दिलेल्यापैकी कोणता निष्कर्ष दिलेल्या विधानांवरुन नक्की काढता येऊ शकतो हे तुम्ही ठरवायचे आहे.तुमचे उत्तर सूचित करा.
विधाने:
(A) काही मांजरे कुत्री आहेत.
(B) काही कुत्री दगडे आहेत.
निष्कर्ष:
I. एकही मांजर दगड नाही.
II. सर्व कुत्री दगडे आहेत.
III. काही दगड मांजरे आहेत.
IV. एकही कुत्रा मांजर नाही.

DIRECTION: Two statements are given following by four conclusions, I, II, III and IV. You have to consider that statements to be true, even if they seem to be at variance from commonly known facts. You are to decide which of the given conclusions can definitely be drawn from the given statements. Indicate your answer.

Statements:
(A) Some cats are dogs.
(B) Some dogs are stones.

Conclusion:
I. No cat is stone.
II. All dogs are stones.
III. Some stones are cats.
IV. No dog is cat.

ہدایات: دو سٹیٹمنٹ جوکہ چار خلاصوں پر مشتمل ہیں I،II، III اور IV. اپ کو وہ سٹیٹمنٹ درست ماننا ہے، اگرچہ دکہنے میں وہ بہت سارے حقاٰق ست مطبقت رکہتی ہو۔ اپ کو دیے گے خلاصوں میں سے یقینی طور پر اسے اختیار کرنا ہے جو سٹیٹمنٹ سے نکلا ہو. اپنا جواب تلاش کرے

اظہار بیان:
کچہ بلیاں کتے ہیں
کچہ کتے پتہر ہیں

نتائج:
I کوی بلی پتہر نہیں ہت۔
II تمام کتے پتہر ہیں۔
III کچہ پتہر بلیاں ہیں۔
IV کوی کتا بلی نہیں ہے۔

A.केवळ I आणि III निष्कर्ष निघेल
A.Only I and III follow
A.صرف I اور III درست ہے

B.केवळ II आणि III निष्कर्ष निघेल
B.Only II and III follow
B.صرف II اور III درست ہے

C.केवळ I, III आणि IV निष्कर्ष निघेल
C.Only I, III and IV follow
C.صرف ,III, I اور IV درست ہے

D.एकही निष्कर्ष निघणार नाही
D.None follows
D.کوی بہی درست نہیں ہے

Answer: D.एकही निष्कर्ष निघणार नाही
D.None follows
D.کوی بہی درست نہیں ہے

53 सूचना: प्रत्येक प्रश्नाला एक प्रमुख विधानासोबत चार विधाने आहेत ज्यांच्याखाली A, B, C, आणि D असे चार विधान आहेत. क्रमवार विधानांची जोडी निवडा ज्यामध्ये प्रथम विधान दुसऱ्या विधानाला सुचवते, आणि दोन्ही विधाने तर्किकदृष्ट्या प्रमुख विधानासोबत निगडित असेल.

तुम्ही एकतर स्वार्थी किंवा निःस्वार्थी आहात
A. तुम्ही स्वार्थी आहात.
B. तुम्ही स्वार्थी नाहीत.
C. तुम्ही निःस्वार्थी आहात.
D. तुम्ही निःस्वार्थी नाहीत.

DIRECTIONS: Each question has a main statement followed by four statements labelled A, B, C and D. Choose the ordered pair of statements, where the first statement implies the second, and the two statements are logically consistent with the main statement.

You are either selfish or selfless
A. You are selfish
B. You are not selfish
C. You are selfless
D. You are not selfless

ہدایت: ہر سوال میں ایک جملہ ہے جسکے بعد چار جملےاے، بی،سی اور ڈی کے نام سے دئے گئے ہیں اسمیں منسلک جوڑیوں کو چنئے۔ جہاں پہلا جملہ دوسرے جملہ کی اور اشارہ کر رہا ہے اور دو جملے منطقی مرکزی بیان کے مطابق ہیں

آپ یا تو خود غرض ہے یا بے غرض
A۔ آپ خود غرض ہیں
B۔ آپ خود غرض نہیں ہیں
C۔ آپ بے غرض ہیں
D۔ آپ بے غرض نہیں ہیں

A.AC
A.AC
A.AC

B.DA
B.DA
B.DA

C.CB
C.CB
C.CB

D.AB
D.AB
D.AB

Answer: B.DA
B.DA
B.DA

54 खालीलपैकी शुद्ध वाक्य कोणते ?

A.आईने स्वयंपाक केला.

B.आईने स्वयंपाक शिजवला.

C.आईने स्वयंपाक बनवला.

D.आईने स्वयंपाक रांधला.

Answer: A.आईने स्वयंपाक केला.

55 निर्देश: मालिका पूर्ण करा

G, I, K, ?, O, Q

DIRECTION: Complete the series

G, I, K, ?, O, Q

ہدایت اس سرج کو مکمّل کرو

G, I, K, ?, O, Q

A.G
A.G
A.G

B.K
B.K
B.K

C.L
C.L
C.L

D.M
D.M
D.M

Answer: D.M
D.M
D.M

56 जर '+' म्हणजे'−' ,'×' म्हणजे '÷' ,'+' म्हणजे '-' आणि '×' म्हणजे ,'÷' तर 4 ÷ 2× 12-6 + 4 चे मूल्य शोधा.

If '+' means '×', '−'means '+', '÷' means '−' and '×' means '÷', find the value of 4+6-12×2÷4

اگر '+' مطلب 'x'، '-' مطلب '+'، '÷' مطلب '-' اور 'x' مطلب '÷'، 4+6-12×2÷4. کی ویلیو پتہ کیجیئے

A. 26

B. 28

C. 25

D. 29

Answer: A. 26

57 सूचना: अर्थपूर्ण परिच्छेद निर्माण करण्यासाठी, खाली दिलेली (P), (Q) (R), (S) आणि (T) ही पाच वाक्ये योग्य अनुक्रमाने पुनर्रचना करा; त्यांनतर खालील प्रश्नांची उत्तर द्या.

P. उंदराच्या परिश्रमाने तो मुक्त झाला होता.
Q. तो जाळ्यात अडकला होता.
R. सिंहाला आपल्या क्षमतेचा गर्व होता.
S. तो जाळ्यातून सुटू शकला नाही.
T. त्याने उंदराच्या कमजोरीला तुच्छ लेखले.

पुनर्रचना केल्यानंतर खालीलपैकी कोणते वाक्य पहिले असेल?

DIRECTION: Rearrange the following five sentences (P), (Q), (R), (S) and (T) in the proper sequence to form a meaningful paragraph; then answer the questions given below them.
P. He was set free by the exertions of the mouse.
Q. He was caught in a net.
R. A lion was proud of his strength.
S. He could not escape from the net.
T. He despised the weakness of the mouse.

Which of the following should be the FIRST sentence after rearrangement?

ہدایات: ان پانچ جملوں (P)، (Q)، (R)، (S) اور (T) کو با معنی پیرا بنانے کے لئے دوبارہ ترتیب دیجئے، پھر نیچے دے گئے سوالوں کے جواب دیجئے

P. اسکو چوہوں کی سرگرمی سے آزاد کیا گیا.
Q. اسکو جال میں فنسایا گیا.
R. شیر کو اپنی طاقت پر گرور تھا.
S. وو جال سے بھاگ نہیں سکھتا. .
T. اسکو چوہوں کی کمزوری سے نفرت تھی.
دوبارہ ترییب دینے کے بعد کون سا جملہ پہلے ہونا چاہیے؟

A.R
A.R
A.R

B.P
B.P
B.P

C.Q
C.Q
C.Q

D.S
D.S
D.S

Answer: A.R
A.R
A.R

58 निर्देश: खालील प्रश्नांमध्ये प्रश्न चिन्हाच्या (?) जागी कोणते अंदाजे मूल्य यायला हवे? (तुम्ही अचूक मूल्य काढण्याचे अपेक्षित नाही).
4×12+599=?

DIRECTIONS: What approximate value should come in place of the question mark (?) in the following questions? (You are not expected to calculate the exact value)

4×12+599=?

ہدایات: مندرجہ ذیل سوال میں سوال کا نشان (?) کی جگہ پر کون سا تخمینہ ویلیو آئے گا -
(آپ کو صحیح ویلیو نکالنے کی ضرورت نہیں ہے)
4×12+599=?

A.660
A.660
A.660

B.655
B.655
B.655

C.650
C.650
C.650

D.670
D.670
D.670

Answer: C.650
C.650
C.650

59 सूचना: प्रत्येक प्रश्नाला एक प्रमुख विधानासोबत चार विधाने आहेत ज्यांच्याखाली A, B, C, आणि D असे चार विधान आहेत. क्रमवार विधानांची जोडी निवडा ज्यामध्ये प्रथम विधान दुसऱ्या विधानाला सुचवते, आणि दोन्ही विधाने तर्किकदृष्ट्या प्रमुख विधानासोबत निगडित असेल.

जर मला उशीर झाला, तर शिक्षक मला शिक्षा करतील
A. मला उशीर झाला
B. शिक्षकाने मला शिक्षा केली
C. मला उशीर झाला नाही
D. शिक्षकांनी मला शिक्षा दिली नाही

DIRECTIONS: Each question has a main statement followed by four statements labelled A, B, C and D. Choose the ordered pair of statements, where the first statement implies the second, and the two statements are logically consistent with the main statement.

If I get late , Teacher will punish me .
A. I got late
B. Teacher punished me
C. I did not get late
D. Teacher did not punish me .

ہدایت: ہر سوال میں ایک جملہ ہے جسکے بعد چار جملےاے، بی،سی اور ڈی کے نام سے دئے گئے ہیں اسمیں منسلک جوڑیوں کو چنئے۔ جہاں پہلا جملہ دوسرے جملہ کی اور اشارہ کر رہا ہے اور دو جملے منطقی مرکزی بیان کے مطابق ہیں

اگر میں لیٹ ہوا تو ٹیچر مجھے سزا دے گا
Aمیں لیٹ ہو گیا ۔
Bٹیچر نے مجھے سزا دی ۔
Cمیں لیٹ نہیں ہوا ۔
Dٹیچر نے مجھے سزا نہیں دی ۔

A.AB
A.AB
A.AB

B.BD
B.BD
B.BD

C.AD
C.AD
C.AD

D.CD
D.CD
D.CD

Answer: A.AB
A.AB
A.AB

60 सूचना: दिलेल्या पर्यायांमधून वेगळे ते बाहेर काढा.

DIRECTIONS: Find the odd one out from the given alternatives.

سمت: دیے گئے متبادل میں سے بے جوڑ کو تلاش کرو۔

A.नियतकालिक
A.Magazine
A.میگزین

B.कादंबरी
B.Novel
B.ناول

C.शब्दकोश
C.Dictionary
C.ڈکشنری

D.निबंध
D.Essay
D.مضمون

Answer: D.निबंध
D.Essay
D.مضمون

61 स्टार्च चाचणी करण्यासाठी कोणती रासायनिक अभिक्रिया आवश्यक आहे?

Which chemical reagent is required to perform starch test?

نشاستہ ٹیسٹ انجام دینے کے لئے کس کیمیائی ابیکرمک کی ضرورت ہے؟

A.सोडियम
A.Sodium
A. سوڈیم

B.क्लोरीन
B.Chlorine
B. کلورین

C.हायड्रोक्लोरिक अँसिड
C.Hydrochloric acid
C. ہائڈروکلورک ایسڈ

D.आयोडिन सोल्युशन
D.Iodine solution
D. آیوڈین سالیوشن

Answer:
D.आयोडिन सोल्युशन
D.Iodine solution
D. آیوڈین سالیوشن

62

कोणते विधान सत्य आहे?

Which statement is true?

کونسا بیان درست ہے؟

A.रेषेला निश्चित लांबी नसते
A.Line has no definite length
A.لائن کی متعین لمبائی نہیں ہوتی

B.रेषा म्हणजे अमर्याद बिंदूंचा संच असतो
B.Line is a set of infinite points
B.لائن متعین نکات ایک مجموعہ ہے

C.रेषाखंडाची लांबी निश्चित असते
C.Line segment has a definite length
C.لائن سیگمنٹ کی لمبائی متعین ہوتی ہے

D.सर्व विधाने सत्य आहेत
D.All statements are true
D.تمام بیانات درست ہیں

Answer:
D.सर्व विधाने सत्य आहेत
D.All statements are true
D.تمام بیانات درست ہیں

63

40 किग्रॅचे 180 किग्रॅशी गुणोत्तर शोधा.

Find the ratio of 40 kg to 180 kg?

180 کلوگرام کے مقابلے میں 40 کلوگرام کا تناسب معلوم کریں؟

A.2:9
A.2:9
A.2:9

	B.1:9 B.1:9 B.1:9
	C.4:18 C.4:18 C.4:18
	D.4:9 D.4:9 D.4:9
Answer:	A.2:9 A.2:9 A.2:9

64	‘ जगन्नाथ ’ या शब्दाची संधी सोडवा.
	A.जगत् + नाथ
	B.जगद् + नाथ
	C.जगन + नाथ
	D.जगन् + नाथ
Answer:	A.जगत् + नाथ

65	‘हाफ गर्लफ्रेंड’ या पुस्तकाचे लेखक कोण आहेत? Who is the author of the book ‘Half Girlfriend’? ‘ہاف گرل فرینڈ’ کا مصنف کون ہے؟
	A.अरविंद अडीगा A.Arvind Adiga A.اروند ادیگا
	B.विक्रम सेठ B.Vikram Seth B.وکرم سیٹھ
	C.चेतन भगत C.Chetan Bhagat C.چیتن بھگت

D.अमिश त्रिपाठी
D.Amish Tripathy
D.امیش تریپاٹھی

Answer: C.चेतन भगत
C.Chetan Bhagat
C.چیتن بھگت

66 A हा C चा वडील आहे आणि D हा B चा मुलगा आहे. E हा A चा भाऊ आहे. जर C ही D ची बहीण असेल तर B चे E सोबत नाते का?

A is father of C and D is son of B. E is brother of A. If C is sister of D how is B related to E?

C A کا باپ ہے اور B D کا بیٹا ہے. A E اگر D C کا بھائی ہے تو B کی بہن ہے C سے کیا رشتہ ہے؟ E

A.मेव्हणी
A.Sister-in-law
A.بھابی

B.बहीण
B.Sister
B.بہن

C.भाऊ
C.Brother
C.بھائی

D.मेव्हणा
D.Brother-in-law
D.جی جا

Answer: A.मेव्हणी
A.Sister-in-law
A.بھابی

67 आधी जन्मलेला --------

A.आजन्म

B.पुनर्जन्म

C.अग्रज

D.अनुज

Answer:	C.अग्रज

68	मनोविश्लेषणात्मक सिद्धांत यावर आधारित असतो. Psychoanalytic theory is based on. تحلیل نفسی کا نظریہ کس پر مبنی ہے۔
	A.व्यक्तिमत्व A.personality A.شخصیت
	B.वाढ B.growth B.نمو
	C.विकास C.development C.ترقی
	D.वरीलपैकी कोणतेही नाही D.none of the above D.درج بالا میں سے کوئی نہیں
Answer:	A.व्यक्तिमत्व A.personality A.شخصیت

69	खालीलपैकी सर्वांत लहान अपूर्णांक शोधा Find the smallest of the following fractions مندرجہ ذیل کسور میں سے سب سے چھوٹی کسر تلاش کریں
	A.20/81 A.20/81 A.20/81
	B.3/8 B.3/8 B.3/8
	C.9/43 C.9/43 C.9/43

D.1/4
D.1/4
D.1/4

Answer: C.9/43
C.9/43
C.9/43

70 जल्लीकट्टु ही खेल स्पर्धा_____या राज्यामध्ये आयोजित केली जाते –

Jallikattu is held in the state of –

جلی کٹّو_____ ریاست میں منعقد ہوتا ہے

A.तामिळनाडू
A.Tamil Nadu
A.تامل ناڈو

B.गुजरात
B.Gujarat
B.گجرات

C.पश्चिम बंगाल
C.West Bengal
C.مغربی بنگال

D.जम्मू आणि कश्मीर
D.Jammu and Kashmir
D.جموں وکشمیر

Answer: A.तामिळनाडू
A.Tamil Nadu
A.تامل ناڈو

71 शिक्षक म्हणून, आपण आपल्या कामाचा — च्या अनुसार विचार केला पाहीजे

As teachers, we should think of our work in terms of—

بحیثیت اساتذہ ، ہمیں اپنے کام کے بارے میں سوچنا چاہئے-

A.पद्धतशीर सराव
A.Systematic drill
A.نظامی ڈرل

B.विषय-वस्तु बद्दल प्रभुत्व
B.The mastery of subject-matter
B.بنیادی عنوان کا راز

C.श्रवणशक्तीचे धडे पाठ म्हणून दाखवणे
C.Hearing lessons recited
C.پڑھایا گیا سبق سننا

D.मुलांची वाढ आणि विकास
D.Child growth and development
D.بچے کی بڑھوتری اور ترقی

Answer: D.मुलांची वाढ आणि विकास
D.Child growth and development
D.بچے کی بڑھوتری اور ترقی

72 यापैकी बालकाच्या व्यक्तिमत्त्वाचे घटक कोणकोणते आहेत.

Which of these are component of child personality.

مندرجہ ذیل میں سے کون بچہ کی شخصیت کے اجزاء ہیں۔

A.प्रवृत्ती
A.temperament
A.خصلت

B.वातावरण
B.environment
B.ماحول

C.स्वभाव
C.character
C.کردار

D.वरीलपैकी सर्व
D.all of the above
D.درج بالا سبھی

Answer: D.वरीलपैकी सर्व
D.all of the above
D.درج بالا سبھی

73 बक्षीस आणि शिक्षा – हे मूलभूत प्रेरक — शी संबंधित आहेत

Reward and Punishment-the basic motivations are related to—

انعام اور سزا - بنیادی حوصلہ افزائی کا تعلق ہے-

A.वर्तणुकीवर देखरेख
A.Behaviour Monitoring
A.رویے کی نگرانی

B.सामाजिक सुरक्षितता
B.Social security
B.سماجی تحفظ

C.ममता आणि आपुलकी
C.Affection and Belongingness
C.اثرات اور نفاذ

D.वरीलपैकी कोणतेही नाही
D.None of the above
D.اوپر سے کوئی بھی نہیں

Answer: A.वर्तणुकीवर देखरेख
A.Behaviour Monitoring
A.رویے کی نگرانی

74 मोहन आणि सोहन यांच्या वर्तमान वयाचे गुणोत्तर 4:5 आहे. बारा वर्षांनंतर हे गुणोत्तर 5 : 6 होईल. 6 वर्षांनंतर मोहनचे वय काय असेल (वर्षांमध्ये)?

The present ratio of Mohan’s and Sohan’s age is 4:5. Twelve years hence this ratio becomes 5 : 6. What will be the age of Mohan (in years) after 6 years?

موہن اور سوہن کی عمروں کا موجودہ تناسب 5:4 ہے۔ 12سال بعد یہ تناسب 6:5 ہو جاتا ہے۔ 6 سال بعد موہن کی عمر (سالوں میں) کیا ہو گی؟

A.48
A.48
A.48

B.54
B.54
B.54

C.60
C.60
C.60

D.66
D.66
D.66

Answer: B.54
B.54
B.54

75 शिकवण्याचे कौशल्य म्हणजे

The teaching skill is a—

تدریسی مہارت ایک ہے-

A.शिकवण्याच्या गतिविधी आणि वर्तणुकीचे एकात्मिक स्वरूप
A.The integrated form of teaching activities and behaviours
A.تدریس کی سرگرمیوں اور طرز عمل کی ایک مربوط شکل

B.वर्गाची आंतरराष्ट्रीय स्थिती
B.The international condition of the class
B.کلاس کی بین الاقوامی حالت

C.शिकण्यासठी हितकारक स्थिती
C.The conducive conditions for learning
C.سیکھنے کے لئے مناسب حالات

D.वरील सर्व
D.All the above
D.مذکورہ تمام

Answer: D.वरील सर्व
D.All the above
D.مذکورہ تمام

76 जर कुत्र्याला मांजर म्हटले, मांजराला उंदीर म्हटले, उंदराला वाघ म्हटले, वाघाला सिंह म्हटले, सिंहाला कोल्हा म्हटले, कोल्ह्याला अस्वल म्हटले, आणि अस्वलाला कांगारु म्हटले. तर जंगलाचा राजा कोण?

If dog is called cat, cat is called rat, rat is called tiger, tiger is called lion, lion is called fox, fox is called bear, and bear is called kangaroo. Who is the king of the forest?

اگر کتے کو بلی، بلی کو چوہا، چوہے کو چیتا، چیتے کو شیر، شیر کو لومڑی، لومڑی کو بھالو اور بھالو کو کنگارو کہا جائے تو جنگل کا راجا کون ہے؟

A.कोल्हा
A.Fox
A.لومڑی

B.सिंह
B.Lion
B.شیر

C.वाघ
C.Tiger
C.چیتا

D.उंदीर
D.Rat
D.چوہا

Answer: A.कोल्हा
A.Fox
A.لومڑی

77 3 टक्के प्रति वर्ष दराने 6 महिन्यांनंतर रू. 72 एवढे सरळ व्याज मिळत असेल, तर मुद्दलेची रक्कम काय असेल: (रूपयांमध्ये)

If a simple interest of Rs.72 will be obtained after 6 months at the rate of 3 percent per annum, then the principal amount would be: (in Rs.)

سالانہ 3 فیصد کی در سے 6 ماہ کے بعد اگر سود مفرد 72 روپیہ محصول ہوتا ہے تو اصل رقم کیا ہوگی:

A.1296
A.1296
A.1296

B.3800
B.3800
B.3800

C.4320
C.4320
C.4320

D.4800
D.4800
D.4800

Answer: D.4800
D.4800
D.4800

78 भारताचे वित्त मंत्री कोण आहेत?

Who is the Finance Minister of India?

ہندوستان کا وزیر مالیات کون ہے؟

A.पीयूष गोयल
A.Piyush Goyal
A.پیوش گوئل

B.निर्मला सीतारमण
B.Nirmala Sitharaman
B.نرملا سیتھارمن

C.अरविंद सुब्रमण्यम
C.Arvind Subramaniam
C.اروند سوبرامانیم

D.अरुण जेटली
D.Arun Jaitley
D.ارون جیٹلی

Answer: D.अरुण जेटली
D.Arun Jaitley
D.ارون جیٹلی

79 खालीलपैकी काय पाण्याच्या घन स्थितीचे एक उदाहरण आहे?

Which of the following is an example of solid state of water?

مندرجہ ذیل میں سے کون پانی کی ٹھوس شکل کی مثال ہے؟

A.वाफ
A.Vapors
A.بھاپ

B.बर्फ
B.Ice
B.برف

C.बर्फ आणि वाफ दोन्हीही
C.Both ice and vapors
C.برف اور بھاپ دونوں

D.वरीलपैकी एकही नाही
D.None of the above
D.ان میں سے کوئی بھی نہیں

Answer: B.बर्फ
B.Ice
B.برف

80 आजकाल सरकारने सामाजिक कल्याण योजनांना प्राथमिकता दिली आहे, त्यामुळे, त्यांनी वृद्धावस्था पेन्शन योजना, विधवा पेन्शन योजना इत्यादि सारख्या विविध योजना सुरू केल्या आहेत. या सर्व योजनांविषयी तुमचे वैयक्तिक मत अशाप्रकारे आहे

Now-a-days the Government has given priority to social welfare schemes, therefore, it has launched various schemes like Age-old Pension scheme, Widow Pension scheme etc. Your personal opinion towards all these schemes is—

آج کل حکومت نے سماجی فلاح و بہبود کے منصوبوں کو ترجیح دی ہے، لہذا اس نے بڑی عمر کےلوگوں کے لئے پنشن اسکیم، بیوہ پنشن اسکیم وغیرہ کے مختلف منصوبوں کو شروع کیا ہے. ان تمام اسکیموں کے متعلق آپ کی ذاتی رائے ہے—

A.या योजना समाजातील त्रस्त विभागांचे जीवनमान उंचावणे आणि त्यांच्या अर्थिक स्थितीला पाठबळ देण्यासाठी फलदायी आहेत
A.These schemes are fruitful to raise the standard and support the economy of troubled sections of the society
A.یہ منصوبےمعاشرے کے مصیبت زدہ حصوں کی معیشت بڑھانے اور ان کا معیار اونچا کرنے میں فائدہ مند ہوتے ہیں۔

B.हे समाजातील दुर्बळ घटकांसाठी एक प्रकारचे सरकारी कर्तव्य आहे
B.It is a kind of governmental obligation for the weaker sections
B.کمزور حصوں کے لئے یہ ایک قسم کی سرکاری ذمہ داری ہے

C.या योजनांमुळे लाभार्थी सामाजिक सहानुभूतीपासून वंचित होतात
C.These schemes deprive the beneficiaries from social sympathy
C.یہ منصوبے فائدہ حاصل کرنے والے افراد کو سماجی ہمدردی سے محروم کرتے ہیں

D.यापैकी कोणतेही नाही
D.None of these
D.ان میں سے کوئی بھی نہیں

Answer: D.यापैकी कोणतेही नाही
D.None of these
D.ان میں سے کوئی بھی نہیں

81 Out of the four alternatives, choose the one which can be substituted for the given words/sentence.
The science of the causes and effects of diseases

A.Pathology

B.Anthropology

C.Alienation

D.Cardiology

For More Info And Videos About TAIT-Exam Syllabus And Other Exam Visit My Channel
TAIT च्या 30 प्रश्नपत्रिका PDF
BADSHAHimp Available Request 9765226781
WWW.YouTube.com/BADSHAHimp
Subscribe My Channel

Answer: A.Pathology

82 'MUSPOPAPOTIH’ पासून खालील शब्दांपैकी कोणते शब्द तयार केले जाऊ शकतात?

Which of the following words can be formed from 'MUSPOPAPOTIH’?

مندرجہ ذیل الفاظ میں سے کونسا 'MUSPOPAPOTIH' سے بنایا جاسکتا ہے؟

A.METAMORPHIC
A.METAMORPHIC
A.METAMORPHIC

B.PHILANTHROPIST
B.PHILANTHROPIST
B.PHILANTHROPIST

C.HIPPOCAMPUS
C.HIPPOCAMPUS
C.HIPPOCAMPUS

D.HIPPOPOTAMUS
D.HIPPOPOTAMUS
D.HIPPOPOTAMUS

Answer: D.HIPPOPOTAMUS
D.HIPPOPOTAMUS
D.HIPPOPOTAMUS

83 22, –15 आणि –7 या संख्यांच्या घनांची बेरीज बरोबर?

The sum of the cubes of the numbers 22, –15 and –7 is equal to?

تین اعداد -15, 22 اور –7 کے مکعب کا مجموعہ برابر ہے

A.6930
A.6930
A.6930

B.9630
B.9630
B.9630

C.3
C.3
C.3

D.0
D.0
D.0

Answer: A.6930
A.6930
A.6930

84 सूचना: दिलेल्या पर्यायांमधून वेगळे ते बाहेर काढा.

DIRECTIONS: Find the odd one out from the given alternatives.

سمت: دیے گئے متبادل میں سے بے جوڑ کو تلاش کرو۔

A.AN
A.AN
A.AN

B.EV
B.EV
B.EV

C.UF
C.UF
C.UF

D.OL
D.OL
D.OL

Answer: A.AN
A.AN
A.AN

85 कोथिंबीरीमध्ये उपयोगी भाग हा आहे

In coriander, the useful parts are

دھنیا میں، کارآمد اجزاء ہیں

A.मुळे आणि पाने
A.Roots & leaves
A.جڑ اور پتے

For More Info And Videos About TAIT-Exam Syllabus And Other Exam Visit My Channel
TAIT च्या 30 प्रश्नपत्रिका PDF
BADSHAHimp Available Request 9765226781
WWW.YouTube.com/BADSHAHimp
Subscribe My Channel

	B.पाने आणि फुले B.Leaves & flowers B.پتے اور پھول
	C.पाने आणि वाळलेली फळे C.Leaves & dried fruits C.پتے اور خشک پھل
	D.फुले आणि वाळलेली फळे D.Flowers & dried fruits D.پھول اور خشک پھل
Answer:	C.पाने आणि वाळलेली फळे C.Leaves & dried fruits C.پتے اور خشک پھل

86	सम्राट 16 वर्षाचा असल्यास त्याला असे म्हणता येईल Samrat is 16 years in age he would be called as سمراٹ کی عمر 16 سال ہے اسے کس طور پر پکارا جائے گا
	A.किशोरवयीन A.teenager A.نوجوان
	B.शालापूर्व मूल B.preschool B.اسکول سے قبل کا بچہ
	C.नुकतेच चालू लागलेले मूल C.toddler C.ٹوڈلر(جو بچہ چلنا سیکھ رہا ہو)
	D.तान्हे मूल D.infant D.شیرخوار بچہ
Answer:	A.किशोरवयीन A.teenager A.نوجوان

For More Info And Videos About TAIT-Exam Syllabus And Other Exam Visit My Channel
TAIT च्या 30 प्रश्नपत्रिका PDF
BADSHAHimp Available Request 9765226781
WWW.YouTube.com/BADSHAHimp
Subscribe My Channel

87	24, 30 आणि 36 चा मसावी (एचसीएफ) काढा? Find the HCF of 24, 30 & 36? 24،30 اور 36کا ایچ سی ایف معلوم کریں
	A.4 A.4 A.4
	B.6 B.6 B.6
	C.8 C.8 C.8
	D.10 D.10 D.10
Answer:	B.6 B.6 B.6
88	एक उद्दिष्ट म्हणून मूल्यमापन — दर्शवते Evaluation as an objective denotes— تشخیص ایک مقصد ہے جس کا مطلب ہے-
	A.सूज्ञता A.Judgement A.فیصلہ
	B.अंदाज B.Estimation B.تخمینہ
	C.गंभीर मूल्यांकन C.Critical evaluation C.باریک تقویم
	D.वरील सर्व D.All of the above D.مذکورہ تمام

For More Info And Videos About TAIT-Exam Syllabus And Other Exam Visit My Channel
TAIT च्या 30 प्रश्नपत्रिका PDF
BADSHAHimp Available Request 9765226781
WWW.YouTube.com/BADSHAHimp
Subscribe My Channel

Answer: D.वरील सर्व
D.All of the above
D.مذکورہ تمام

89 “प्रतिक्रिया व्यक्त करण्याची जैविकरित्या प्राप्त वैशिष्ट्यपूर्ण पद्धत” म्हणजे

“It is a biological leased characteristic way of reacting” it is

"یہ حیاتیاتی خصوصیات والے ردعمل کا طریقہ ہے" یہ ہے

A.स्वभाववैशिष्ट्य
A.trait
A.خصوصیت

B.मूल्ये
B.values
B.اقدار

C.प्रवृत्ती
C.temperament
C.خصلت

D.वरीलपैकी काहीही नाही
D.none of above
D.درج بالا میں سے کوئی نہیں

Answer: C.प्रवृत्ती
C.temperament
C.خصلت

90 सूचनाः दिलेल्या पर्यायांमधून ऍनालॉगस शब्द निवडा.
एक त्रिकोण तीनशी निगडीत असतो जसा एक चौकोन…

DIRECTIONS: Choose the analogous word from the given alternatives.

A Triangle is related to three in the same way square.

ہدایات: دیے گئے متبادل سے مطابق لفظ کا انتخاب کریں

ایک ٹرینگل کا تین کے ساتھ وہی رشتہ ہے جو ایک اسکوائر کا --------- کے ساتھ .

A.पाच
A.Five
A. پانچ

B.चार
B.Four
B. چار

C.अकरा
C.Eleven
C. گیارہ

D.सहा
D.six
D. چھ

Answer: B.चार
B.Four
B. چار

91 सूचना: एकाच फाशाच्या चार अवस्था दाखविल्या आहेत, तर 1 ठिपका असणाऱ्या बाजूच्या विरुद्ध बाजूवर किती ठिपके असतील?

DIRECTIONS: From the given four positions of a single dice, find the number of dots at the face opposite to the face having 1 dots.

ہدایات: ایک پاسہ کی دی گئی چار حالتوں میں سے، ایک پاسہ کے منہ پر نقطوں کی گنتی کو دریافت کیجیئے، جس کے سامنےوالے پاسہ کے منہ پر ایک نقطہ ہے؟

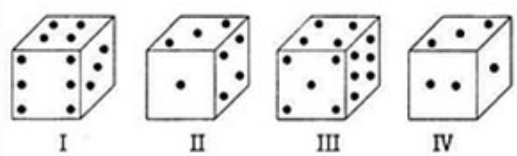

A. 2

B. 4

C. 5

D. 6

Answer: D. 6

For More Info And Videos About TAIT-Exam Syllabus And Other Exam Visit My Channel
TAIT च्या 30 प्रश्नपत्रिका PDF
BADSHAHimp Available Request 9765226781
YouTube WWW.YouTube.com/BADSHAHimp
Subscribe My Channel

92

A, B, C, आणि D नावाच्या चार आकृतींपैकी कोणती आकृती यानंतर आल्यास साम्य किंवा नातेसंबंध पूर्ण होईल?

Which of the five numbered figures will come next to complete the analogy or relationship

پانچ عدد والی کونسی شکل مثال مکمل کرنے کے کئے آگے آنے کی؟

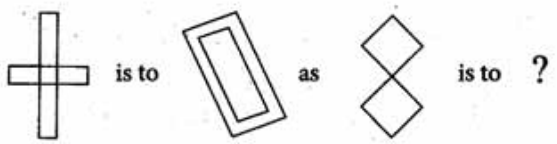

उत्तरादाखल आकृत्या
Answer Figure
جوابی شکل

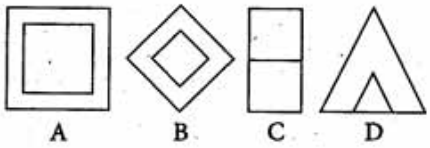

A. (A)

B. (B)

C. (C)

D. (D)

Answer: A. (A)

93

साधारणपणे अंतःप्रेरणा — मध्ये दिसून येतात

Generally the instincts are witnessed in—

عام طور پر جبلت اس میں موجود ہیں-

A.मुले
A.Children
A.بچے

B.प्राणी
B.Animals
B.جانور

C.मनुष्य आणि प्राणी
C.Man and Animals
C.انسان اور جانور

D.सांगू शकत नाही
D.Cannot say
D.نہیں کہہ سکتا

Answer:	C.मनुष्य आणि प्राणी C.Man and Animals C.انسان اور جانور

94	‘एलिसा 'चाचणी याचे निदान करण्यासाठी कार्यरत आहे ‘ELISA’ test is employed to diagnose "ایلیسا (ELISA)" ٹسٹ _____ کا پتہ لگانے کے لئے کیا جاتا ہے۔
	A.पोलियो व्हायरस A.Polio virus A.پولیو وائرس
	B.एड्स ऍन्टीबॉडीज B.AIDS antibodies B.ایڈز انٹی باڈیز
	C.क्षयरोग जीवाणू C.Tuberculosis bacterium C.ٹیوبرکیولوسس بیکٹیریم
	D.कर्करोग D.Cancer D.کینسر

Answer:	B.एड्स ऍन्टीबॉडीज B.AIDS antibodies B.ایڈز انٹی باڈیز

95	शिक्षकाचे हे कर्तव्य आहे की — करू नये It is the teacher’s obligation not to— یہ استاد کی ذمہ داری ہے، کہ وہ نہ کرے—
	A.लोकशाहीवादी आदर्शाला परिपूर्तीकडे एक पाऊल पुढे आणणे A.Bring the democratic ideal one step nearer to realization A.جمہوریہ مثالی مرحلے کو حقیقت کے مزید قریب لائیں
	B.स्वतःला कोणत्याही आक्रमक शक्तीसह जोडले जाणे टाळणे B.Avoid associating himself with any aggressive force B.کسی جارحانہ قوت سے خود کو جڑنے کرنے سے بچیں

For More Info And Videos About TAIT-Exam Syllabus And Other Exam Visit My Channel
TAIT च्या 30 प्रश्नपत्रिका PDF
BADSHAHimp Available Request 9765226781
WWW.YouTube.com/BADSHAHimp
Subscribe My Channel

C.कोणत्याही राजकीय गटाशी जोडले जाण्यापासून लांब राहाणे
C.Refrain from joining any political group
C.کسی بھی سیاسی گروپ میں شامل ہونے سے گریز کریں

D.सक्रीयपणे धार्मिक गतिविधींमध्ये सहभाग घेणे
D.Actively participate in religious activities
D.فعال طور پر مذہبی سرگرمیوں میں حصہ لیں

Answer: D.सक्रीयपणे धार्मिक गतिविधींमध्ये सहभाग घेणे
D.Actively participate in religious activities
D.فعال طور پر مذہبی سرگرمیوں میں حصہ لیں

96 ‘हिडर’, ‘थ्रो-इन’ या संकल्पना कशामध्ये वापरल्या जातात –

The terms ‘Header’, ‘Throw-In’ are used in –

ہیڈر ’، ‘تھرو - ان’ اصطلاحات – میں استعمال ہوتے‘

A.हॉकी
A.Hockey
A. ہاکی

B.क्रिकेट
B.Cricket
B.کرکٹ

C.टेनिस
C.Tennis
C.ٹینس

D.यांपैकी कोणतेही नाही
D.None of these
D.ان میں سے کوئی نہیں

Answer: D.यांपैकी कोणतेही नाही
D.None of these
D.ان میں سے کوئی نہیں

97	गुणाकार करा: 298 × 9 = ? Multiply: 298 × 9 = ? ضرب دیں: 298 × 9 = ?
	A.2762 A.2762 A.2762
	B.2666 B.2666 B.2666
	C.2412 C.2412 C.2412
	D.2682 D.2682 D.2682
Answer:	D.2682 D.2682 D.2682

98 सूचना: या प्रत्येक प्रश्नांमध्ये दोन विधानांनंतर दोन निष्कर्ष येतात ज्यांना I आणि II असे अंकित केले आहे. जरी सामान्यपणे माहीत असलेल्या तथ्यांबरोबर जुळत नसले तरी खालील विधाने बरोबर आहेत असे समजून तुमचे योग्य उत्तर लिहा.
निवेदन:
सर्व महिला मंत्री आहेत.
सर्व मंत्री साधे आहेत.
निष्कर्ष:
I. सर्व महिला साध्या आहेत.
II. सर्व मंत्री साधे आहेत.

DIRECTION: In each of these questions, two statements are followed by two conclusions numbered I and II. Assume the given statements to be true, even if they seem to be of variance with commonly known facts and then mark your answer as.

Statements:
All women are ministers.
All ministers are simpleton.

Conclusions:
I. All women are simpleton.
II. All ministers are simpleton.

ہدایت:ان میں سے ہر ایک سوال میں، دو بیانات کے بعد دو نتیجے نمبر I اور II دیے گئے ہیں۔ دیے گئے بیانات کو درست تسلیم کریں، اگرچہ وہ عام طور پر معلوم حقائق کے برعکس نظر آتے ہوں اور پھر اس کے مطابق اپنا جواب نشان زد کریں۔

بیانات:
تمام عورتیں وزیر ہیں۔
تمام وزیر اناڑی ہیں۔

حل:
I. تمام عورتیں اناڑی ہیں۔
II. تمام وزیر اناڑی ہیں۔

A.जर केवळ निष्कर्ष I निघत असल्यास.
A.If only conclusion I follows.
A.صرف نتیجہ I پیروی کرتا ہے۔

B.जर केवळ निष्कर्ष II निघत असल्यास.
B.If only conclusion II follows.
B.صرف نتیجہ II پیروی کرتا ہے۔

C.जर दोन्ही निष्कर्ष निघत असल्यास.
C.If both the conclusions follow.
C.دونوں نتیجے پیروی کرتے ہیں۔

D.जर दोन्ही I आणि II निघत नसल्यास.
D.If neither I nor II follows.
D. نہ تو I نہ ہی II پیروی کرتا ہے۔

Answer: C.जर दोन्ही निष्कर्ष निघत असल्यास.
C.If both the conclusions follow.
C.دونوں نتیجے پیروی کرتے ہیں۔

99 ‘अनिष्ट‘ या शब्दाचा समानार्थी शब्द कोणता ?

A.अशुभ

B.शुभ

C.कल्याणकारी

D.चांगला

Answer: A.अशुभ

100 सुनामी कधी उद्भवू शकतात –

Tsunamis can occur –

سونامی _____ ہوسکتا ہے

A.फक्त सकाळी
A.Only in the morning
A.صرف صبح میں

B.फक्त रात्री
B.Only in the night
B.صرف رات میں

C.फक्त संध्याकाळी
C.Only in the evening
C.صرف شام میں

D.संपूर्ण दिवसामध्ये कोणत्याही वेळी
D.Anytime of the entire day
D.پورے دن میں کسی بھی وقت

Answer: D.संपूर्ण दिवसामध्ये कोणत्याही वेळी
D.Anytime of the entire day
D.پورے دن میں کسی بھی وقت

101 Out of the given options which best expresses the meaning of the given Proverb?
Too many cooks spoil the broth

A.If many people work in collaboration then the end product is always flawless

B.In order to make delicious food many highly skilled cooks are required

C.When there are too many people involved in trying to do the same thing the final result will not be good

D.Cooking should be done by a single person with utmost concentration

Answer: C.When there are too many people involved in trying to do the same thing the final result will not be good

102 खालीलपैकी अशुद्ध वाक्य कोणते ?

A.तो पुरुष आहे.

B.ती स्त्री आहे.

C.ते एकत्र आहेत.

D.त्या मुली आहे.

Answer: D.त्या मुली आहे.

103 फोटोमधील एका पुरुषाकडे बोट दाखवून एक स्त्री म्हणतेः "माझ्या सुनेच्या दीराचे हे वडील आहेत." मग त्या पुरुषाचं या स्त्रीसोबत नातं काय आहे?

Pointing to a man in the photograph a woman says: “He is the father of my daughter-in-law’s brother-in-law.” How is the man related to the woman?

تصویر میں ایک آدمی کی طرف اشارہ کرکے عورت نے کہا: "یے بہو کے جی جا کا باپ ہے." آدمی کا عورت سے کیا رشتہ تھا؟

A.पती
A.Husband
A.شوہر

B.भाऊ
B.Brother
B.بھائی

C.दीर
C.Brother-in-law
C.جی جا

D.वडील
D.Father
D.باپ

Answer: A.पती
A.Husband
A.شوہر

104 मनुष्य पृथ्वीच्या पृष्ठापेक्षा चंद्राच्या पृष्ठावर उंच उडी मारू शकतो कारण.

A person can jump higher on the moon's surface than on the earth because -

ایک فرد زمین کے مقابلے چاند کی سطح پر زیادہ اونچا چھلانگ لگا سکتا ہے کیونکہ۔

A.चंद्राचा पृष्ठ खडबडीत आहे
A.The moon's surface is rough
A.چاند کی سطح کھردری ہے

B.चंद्रावर वातवरण नाही
B.The moon has no atmosphere
B.چاند میں کوئی فضا نہیں ہے

C.चंद्रावर पृथ्वीपेक्षा गुरूत्वाकर्षण असल्याने प्रवेग कमी आहे
C.The acceleration due to gravity in moon
is smaller than that on the earth
C.چاند میں موجود ثقالت کی وجہ سے اس کی سرعت زمین سے کم ہوتی ہے

D.चंद्र पृथ्वीपेक्षा थंड आहे
D.The moon is cooler than earth
D.چاند زمین سے ٹھنڈا ہوتا ہے

Answer: C.चंद्रावर पृथ्वीपेक्षा गुरूत्वाकर्षण असल्याने प्रवेग कमी आहे
C.The acceleration due to gravity in moon
is smaller than that on the earth
C.چاند میں موجود ثقالت کی وجہ سے اس کی سرعت زمین سے کم ہوتی ہے

105

$$\sqrt{\frac{484}{289}} = ?$$

A. 12

B. 25/17

C. 22/17

D. 14

Answer: C. 22/17

106 15876 च्या वर्गमूळामधील एकक स्थानी असलेला अंक?

The digit in the unit's place in the square-root of 15876 is?

15876؟ کے مربعی جذر میں اکائی کے مقام پر ہندسہ ہے

A.8
A.8
A.8

B.6
B.6
B.6

C.4
C.4
C.4

D.2
D.2
D.2

Answer: B.6
B.6
B.6

107 शिक्षकाचे सर्वात महत्वाचे कार्य म्हणजे

The most important function of the teacher is to—

استاد کا سب سے اہم کام ہے—

A.सुव्यवस्था राखणे
A.Maintain an order
A.ترتیب برقرار رکھنا

B.विषय-वस्तु प्रदान करणे
B.Impart subject-matter
B.بنیادی عنوان کو الگ کرنا

C.समस्या सोडवणारी तंत्रे शिकवणे
C.Teach problem-solving techniques
C.مسئلہ حل کرنے کی تکنیک سکھانا

D.विद्यार्थ्यांच्या वाढीला मार्गदर्शन करणे
D.Guide pupil's growth
D.طالب علم کی ترقی کی رہنمائی

Answer: D.विद्यार्थ्यांच्या वाढीला मार्गदर्शन करणे
D.Guide pupil's growth
D.طالب علم کی ترقی کی رہنمائی

108

सूचना: खालील प्रश्नात, दिलेल्या पर्यायांमधून नातेसंबंध सांगणारी आकृती निवडा.

DIRECTIONS: In the question below, select the related figure from the given alternatives.

ہدایات: نیچے دیئے گئے سوال میں، دیئے گئے متبادلات میں سے متعلق شکل چنئے۔

Problem Figures

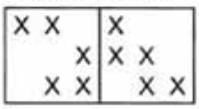

Answer Figures

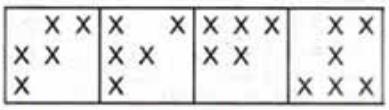

A. (A)

B. (B)

C. (C)

D. (D)

Answer: A. (A)

109

$$\left(\frac{243}{32}\right)^{1/5} = ?$$

A. 2

B. 1.5

C. 4

D. 7

Answer: B. 1.5

110 मोनिका विशिष्ट अंतर 48 किमी/तास या गतीने कापते आणि मग ती पुन्हा तिच्या सुरूवातीच्या स्थानावर जाण्यासाठी 32 किमी/तास या गतीने प्रवास करते. संपूर्ण प्रवासामध्ये मोनिकाची सरासरी गती काय आहे (किमी/तास मध्ये)?

Monika covers a certain distance at the speed of 48 kmph and then she travels back at a speed of 32 kmph to go to her initial position. What is the average speed of Monika for the entire journey (in kmph)?

مونیکا 48 کلومیٹر فی گھنٹہ کی رفتار سے ایک مخصوص فاصلہ طے کرتی ہے اور پھر 32 کلومیٹر فی گھنٹہ کی رفتار سے ابتدائی مقام تک آتی ہے۔ پورے سفر کے لئے مونیکا کی اوسط رفتار (کلومیٹر فی گھنٹہ میں) کیا ہے؟

A.36
A.36
A.36

B.40
B.40
B.40

C.45
C.45
C.45

D.यांपैकी कोणतेही नाही
D.None of these
D.کوئی نہیں

Answer: D.यांपैकी कोणतेही नाही
D.None of these
D.کوئی نہیں

111 कोणता वयोगट तान्हे असण्याच्या अधिक जवळचा आहे?

Which age group is more close to being an infant?

عمر کا کون سا گروپ ایک شیرخوار بچہ ہونے کے زیادہ قریب ہے؟

A.0-1 वर्षे
A.0-1 years
A.0-1 سال

B.3-6 वर्षे
B.3-6 years
B.3-6 سال

C.2-4 वर्षे
C.2-4 years
C.2-4سال

D.4-5 वर्षे
D.4-5 years
D.4-5سال

Answer: A.0-1 वर्षे
A.0-1 years
A.0-1 سال

112 Out of the given options, choose the most appropriate one to fill in the blank.
Owls _____in the daytime

A.hide

B.has hide

C.have hide

D.has hid

Answer: A.hide

113 सूचना: येथे दिलेल्या दोन निवेदनांमधून तार्किकदृष्ट्या सुसंगत पर्याय निवडा, परंतु केवळ एका निवेदानातून नाही.
सर्व शहाणे पुरुष असतात.
काही शहाणे वेडे असतात.

DIRECTION: Select the alternative that logically follows from the two given statements, but not from one statement alone.

All sane are men.
Some sane are insane.

ہدایت:وہ متبادل منتخب کریں جو دیے گئے دو بیانات کے مطابق ہے، لیکن اکیلے ایک بیان سے نہیں۔

سبھی عقلمند مرد ہیں۔
کچھ عقلمند پاگل ہیں۔

A.काही पुरुष वेडे असतात.
A.Some men are insane
A.کچھ مرد پاگل ہیں۔

B.कोणतेही पुरुष वेडे नसतात.
B.No men are insane
B.کوئی مرد پاگل نہیں ہیں۔

C.सर्व पुरुष वेडे असतात,
C.All men are insane
C.سبھی مرد پاگل ہیں۔

D.वरील पैकी कोणतेही नाही
D.None of the above
D.اوپر میں سے کوئی نہیں

Answer: A.काही पुरुष वेडे असतात.
A.Some men are insane
A.کچھ مرد پاگل ہیں۔

114 भारतात अल्पवयीन वय काय आहे?

What is the juvenile age in India?

ہندوستان میں جوئنائل عمر کیا ہے

A.14 वर्षे
A.14 years
A.14 سال

B.16 वर्षे
B.16 year
B.16سال

C.18 वर्ष
C.18 years
C.18 سال

D.17 वर्षे
D.17 years
D.17 سال

Answer: C.18 वर्ष
C.18 years
C.18 سال

115 Choose the word which is opposite in meaning to the given word.
AMALGAMATE

A.Isolate

B.Collect

C.Gather

D.Assemble

Answer: A.Isolate

116 Out of the given four words only one is not spelt correctly. Find the word that is not correctly spelt.

A.Ampleefier

B.Accordion

C.Amateur

D.Atheist

Answer: A.Ampleefier

117 40 विद्यार्थ्यांच्या रांगेत, R उजवीकडून 5 व्या क्रमांकावर असून R आणि D मध्ये दहा विद्यार्थी आहेत. तर रांगेत डावीकडून D कितव्या स्थनावर आहे ?

In a row of 40 students R is 5th from the right end and there are 10 students between R and D. What is D’s position from the left end of the row?

40 بچھوں ککتار میں R اور D دھانیں چھور سے R اور D کے درمیان 10 بچھے ہے. کتار کے بھانیں چھور سے پانچوہ ہے اور D کی جگہ کیا ہے؟

A. 26 व्या
A.26th
A.26th

B. 23 व्या
B.23rd
B.23rd

C. 24 व्या
C.24th
C.24th

D. 25 व्या
D.25th
D.25th

Answer: D. 25 व्या
D.25th
D.25th

118 ‘डावलणे’ या शब्दाचा विरुद्धार्थी शब्द कोणता ?

A.दुर्लक्षणे

B.वगळणे

C.डच्चू देणे

D.सामावणे

Answer: D.सामावणे

119 सूचना: दिलेल्या पर्यायांमधून वेगळे ते बाहेर काढा.

DIRECTIONS: Find the odd one out from the given alternatives.

سمت: دیے گئے متبادل میں سے بے جوڑ کو تلاش کرو۔

A.OPQSTU
A.OPQSTU
A.OPQSTU

B.ABCEFG
B.ABCEFG
B.ABCEFG

C.HIJHIJ
C.HIJHIJ
C.HIJHIJ

D.TUVXYZ
D.TUVXYZ
D.TUVXYZ

Answer: C.HIJHIJ
C.HIJHIJ
C.HIJHIJ

120 सूचना: खालील प्रश्नांमध्ये दिलेल्या पर्यायांमधून संबंधित अक्षर/शब्द/संख्या निवडा.

9 : 3 :: 15 : ?

DIRECTIONS: In the following question, select the related letter/word/number from the given alternatives.

9 : 3 :: 15 : ?

سمت: مندرجہ ذیل سوال میں، دیے گئے متبادل سے متعلقہ حرف/لفظ/نمبر منتخب کریں۔

9 : 3 :: 15 : ?

A.4
A.4
A.4

B.5
B.5
B.5

C.7
C.7
C.7

D.8
D.8
D.8

Answer: B.5
B.5
B.5

121 राहुल दक्षिण दिशेस चालणे सुरु करतो आणि 7 मीटर अंतर चालतो. आता तो डावीकडे वळतो आणि 6 मी. चालतो. पुन्हा तो डावीकडे वळतो आणि 15 मी.चालतो आणि बिंदू P वर पोहचतो. राहुल सुरुवातीच्या बिंदूपासून कोणत्या दिशेला आहे?

Rahul starts walking in south direction and walks a distance of 7 meters. Now he took a left turn and walk 6m. Again he takes a left turn and walks 15m and reached a point P. In which direction is the Rahul from the initial point.

راہول نے جنوب کی سمت چلنا شروع کیا اور 7 میٹر تک چلا- اب وہ بائیں جانب مڑا اور 6 میٹر چلا- وہ دوبارہ پھر بائیں جانب مڑجاتا ہے اور پوائنٹ P پر پہونچا- راہول شروعآتی پوائنٹ سے کس سمت میں ہے؟ اور 15 میٹر چلتا ہے

A.दक्षिण पूर्व
A.South East
A.جنوب مشرق

B.उत्तर पूर्व
B.North East
B.شمال مشرق

C.उत्तर पश्चिम
C.North West
C.شمال مغرب

D.दक्षिण पश्चिम
D.South West
D.جنوب مغرب

Answer: B.उत्तर पूर्व
B.North East
B.شمال مشرق

122 शिक्षकाने नवीन धडा शिकवण्यासाठी कशी सुरवात करायला हवी?

How should a teacher begin with a new lesson?

استاد کو نیا سبق کیسے شروع کرنا چاہئے؟

A.गोष्ट सांगून
A.Through story—telling
A.کہانی کے ذریعے

B.कविता म्हणून दाखवून
B.Through reciting a poetry
B.شعر سناتے ہوئے

C.चित्र प्रदर्शन करून
C.Through displaying a picture
C.تصویر دکھانے کے ذریعے

D.वरीलपैकी कोणत्याही दोन पद्धती
D.Any two methods from above
D.اوپر سے کسی بھی دو طریقوں سے

Answer: D.वरीलपैकी कोणत्याही दोन पद्धती
D.Any two methods from above
D.اوپر سے کسی بھی دو طریقوں سے

123	पृथ्वीचा सर्वांत जाड थर आहे The thickest layer of the earth is زمین کی سب سے موٹی تہہ ہے
	A.कवच A.Crust A.کرسٹ
	B.आवरण B.Mantle B.مینٹل
	C.बर्हिगाभा C.Outer core C.آوٹر کور
	D.अंतर्गत गाभा D.Inner core D.انر کور
Answer:	B.आवरण B.Mantle B.مینٹل

124	Out of the given options, choose the one which is the correct active voice of the sentence given below. The assignment had not been completed by me.
	A.I have not complete the assignment.
	B.I had not completed the assignment.
	C.I had not been completed the assignment.
	D.The assignment was not complete by me.
Answer:	B.I had not completed the assignment.

125 परीक्षेमध्ये, उत्तीर्ण होण्यासाठी कमाल सरासरी गुणांपेक्षा 1034 मिळवणे आवश्यक आहे. विद्यार्थ्याला 940 गुण मिळाले आणि तो 5% गुणांनी नापास झाला. विद्यार्थ्याला मिळू शकतील असेल कमाल सरासरी गुण काय आहेत?

In an examination, it is required to get 1034 out of the maximum aggregate marks to pass. A student gets 940 marks and is declared failed by 5% marks. What are the maximum aggregate marks a student can get?

ایک امتحان میں، پاس کرنے کے لئے زیادہ سے زیادہ مجموعی نمبروں میں سے 1034 حاصل کرنا ضروری ہے. ایک طالب علم 940 نمبر حاصل کرتا ہے اور 5% نمبروں سے فیل قرار دیا جاتا ہے . ایک طالب علم زیادہ سے زیادہ کتنے مجموعی نمبر لے سکتا ہے؟

A.1660
A.1660
A.1660

B.1880
B.1880
B.1880

C.1750
C.1750
C.1750

D.निश्चित करता येत नाहीत
D.Cannot be determined
D. معلوم نہیں ہو سکتا

Answer: B.1880
B.1880
B.1880

126 मुलांमधील वर्तणुकीच्या अंतःप्रेरणेचे मूळ स्थान आहे

The origin place of behavioural instincts in children is –

چوں میں رویے کی جبلت کی اصل جگہ ہے -

A.अनुवंशिकता
A.Heredity
A.وراثت

B.पर्यावरण
B.Environment
B.ماحولیات

C.शाळा
C.School
C.اسکول

D.शेजार
D.Neighbourhood
D.پڑوس

Answer: A.अनुवंशिकता
A.Heredity
A.وراثت

127 A sentence with an underlined idiomatic expression is given. What is the meaning of the idiomatic expression ‘Back to square one’ in the sentence given below?
I picked up all the leaves and branches from my lawn yesterday but there was a storm last night and now I’m back to square one

A.To be back at the starting point of something.

B.To have accomplished the task successfully

C.To be the first one to complete the work

D.None of the above

Answer: A.To be back at the starting point of something.

128 दिलेली अदलाबदल : चिन्हे ÷ आणि ×, तसेच आकडे 4 आणि 8; तर 4 × 8 ÷ 2 चे मूल्य किती ?

Given interchanges: signs ÷ and ×, and numbers 4 and 8; then the value of 4 × 8 ÷ 2 is

دیئے گئے تبادلے: علامات ÷اور ×، اور نمبر 4 اور 8؛ تو 4 × 8 ÷ 2 کی تعداد ہے

A.4
A.4
A.4

B.8
B.8
B.8

C.12
C.12
C.12

D.16
D.16
D.16

Answer: A.4
A.4
A.4

129 2 वर्षे वयानंतर मुल क्लेश होत असल्याची भावना — स्वरूपात दर्शवते

After the age of 2 years a child shows the emotion of distress in the form of—

2 سال کی عمر کے بعد بچہ پریشانی کے جذبہ اظہار اس صورت میں کرتا ہے-

A.भीती
A.Fear
A.خوف

B.विरोधी वागणे
B.Disjust
B.نفرت

C.संताप
C.Anger
C.غصہ

D.वरील सर्व
D.All of the above
D.مذکورہ تمام

Answer: D.वरील सर्व
D.All of the above
D.مذکورہ تمام

130 अचूक मूल्यांकन अभिव्यक्ती आणि भावनांच्या नियमनात अंतर्निहित कौशल्य संच.

A set of skills that underlies accurate appraisal expression and regulation of emotions.

مہارتوں کا ایک سیٹ جس میں درست تشخیص کا اظہار اور جذبات کا امر ہوتا ہے۔

A.भावनिक बुद्धिमत्ता
A.emotional intelligence
A.جذباتی ذہانت

B.विश्वास
B.belief
B.اعتقاد

C.सर्जनशीलता
C.creativity
C.تخلیقی صلاحیت

D.व्याज
D.interest
D.دلچسپی

Answer: A.भावनिक बुद्धिमत्ता
A.emotional intelligence
A.جذباتی ذہانت

131 4, 21 व 35 चा सरासरी काढा.

Find the average of 4, 21 and 35.

4،21 اور 35 کا اوسط نکالئے؟

A.29
A.29
A.29

B.20
B.20
B.20

C.41
C.41
C.41

D.38
D.38
D.38

Answer: B.20
B.20
B.20

132 राम एका विशिष्ट परीक्षेत गुणवत्ता यादीत वरून सोळाव्या स्थानावर तर खालून पंधराव्या स्थानावर आहे. तर वर्गात एकूण किती मुले आहेत ?

Rama ranks sixteenth from the top and fifteenth from the bottom in a certain examination. How many students are there in the class?

راما اپر سے سولوے درجے پر ہے اور نیچے سے پندروے درجے پر ہے امتحاں میں. کلاس میں کتنے بچھے ہے؟

A.30
A.30
A.30

B.31
B.31
B.31

C.32
C.32
C.32

D.33
D.33
D.33

Answer: A.30
A.30
A.30

133 एखाद्या व्यक्तीची कौशल्ये आत्मसात करण्याची अंतर्निहित क्षमता म्हणजे

An individual underlying potential for acquiring skills is known as

ایک فرد جس میں مہارت حاصل کرنے کا ایک بنیادی جذبہ موجود ہو اس کو کس طور پر جاناجاتا ہے

A.बुद्धिमत्ता
A.intelligence
A.علم واقفیت

B.व्यक्तिमत्व
B.personality
B.شخصیت

C.योग्यता
C.aptitude
C.بھوک

D.मूल्य
D.value
D.قدر

Answer: A.बुद्धिमत्ता
A.intelligence
A.علم واقفیت

134 सूचना: खालील माहितीचा अभ्यास करुन दिलेल्या प्रश्नांची उत्तरे द्या.
A, B, C, D, E, F, G आणि H हे 8 मित्र एका वर्तुळामध्ये केंद्रासमोर बघत बसलेले आहेत. AC, DG, HE आणि FB एकमेकांच्या बाजूला बसलेले आहेत. A देखील H च्या बाजूला बसलेला आहे. B हा H च्या उजवीकडून दुसरा आहे. E हा C च्या उजवीकडून तिसरा आहे.
E च्या संदर्भात C ची स्थिती काय आहे?

DIRECTIONS: Study the following information to answer the given questions.
There are 8 friends A, B, C, D, E, F, G and H seated in a circle facing the centre. AC, DG, HE and FB are seated adjacent to each other. A is also seated adjacent to H. B is 2nd to the right of H. E is 3rd to the right of C.
What is C's position with reference to E?

ہدایات: دیے گئے سوالات کے جواب دینے کے لیے مندرجہ ذیل معلومات کا مطالعہ کریں۔
8 دوست G، F، E، D، C، B، A اور H ایک دائرے میں مرکز کا رخ کیے ہوئے بیٹھے ہیں۔ HE، DG، AC اور FB ایک دوسرے سے ملے ہوئے بیٹھے ہیں۔A ، H کے بغل میں بھی بیٹھا ہے۔B کے دائیں سے دوسرا ہے۔ H ، E کے دائیں سے تیسرا ہے۔ C
E کے حوالے سے C کی پوزیشن کیا ہے؟

A.उजवीकडून 5 वी
A.5th to the right
A.دائیں سے پانچواں

B.डावीकडून 4 थी
B.4th to the left
B.بائیں سے چوتھا

C.उजवीकडून 4 वी
C.4th to the right
C.دائیں سے چوتھا

D.उजवीकडून 3 री
D.3rd to the right
D.دائیں سے تیسرا

Answer: A.उजवीकडून 5 वी
A.5th to the right
A.دائیں سے پانچواں

135 $y^2 + 4y + 4 = 0$ या वर्गसमीकरणाची मुळे ही आहेत:

The roots of the quadratic equation $y^2 + 4y + 4 = 0$ are:

$y^2+ 4y + 4 = 0$ مربع مساوات کے روٹ ہیں:

A.-2, -2
A.-2, -2
A.-2, -2

	B.2, 2 B.2, 2 B.2, 2
	C.2, -2 C.2, -2 C.2, -2
	D.4, 1 D.4, 1 D.4, 1
Answer:	A.-2, -2 A.-2, -2 A.-2, -2

136	8/20 चे टक्केवारीत रुपांतर करा. Convert 8/20 into percentage? 8/20کوفی صد میں میں تبدیل کیجئے
	A.20% A.20% A.20%
	B.40% B.40% B.40%
	C.60% C.60% C.60%
	D.30% D.30% D.30%

Answer: B.40%

B.40%

B.40%

137 सामग्री किंवा विषय घटकांच्या क्रमवार केलेल्या मांडणीमुळे — चा अधिकतम पाठपुरावा केला जातो

Arrangement of content or topics elements in a sequence follows the maxim of—

ایک ترتیب میں مواد یا موضوع کے عناصر کا انتظام میکزم کی پیروی کرتا ہے

A.ज्ञात कडून अज्ञाताकडे
A.From known to unknown
A.نامعلوم سے معلوم تک

B.सरळसोपे कडून कठीण कडे
B.From simple to difficult
B.سادہ سے مشکل تک

C.ठोस कडून निराकार कडे
C.From concrete to abstract
C.ایبسٹریکٹ سے کنکریٹ تک

D.वरील सर्व
D.All of the above
D.مذکورہ تمام

Answer: D.वरील सर्व
D.All of the above
D.مذکورہ تمام

138 खालीलपैकी कोणते विधान मिश्रणासाठी बरोबर आहे?

Which of the following statement is true about mixtures?

مرکب کے بارے میں مندرجہ ذیل میں سے کونسا بیان صحیح ہے؟

A.मिश्रण तयार करण्यामध्ये रासायनिक प्रक्रियेचा समावेश नाही.
A.No chemical reaction is involved in making of a mixture
A.ایک مرکب تیار کرنے میں کوئی کیمیکل ردعمل شامل نہیں ہوتا۔

B.मिश्रणाचे घटक भौतिक पद्धतींनी वेगळे केले जाऊ शकत नाहीत.
B.Constituents of mixture cannot be separated by physical methods
B.-مرکب کے اجزاء کو مادی طریقوں سے علیحدہ نہیں کیا جا سکتا ہے

C.पदार्थ मिसळण्यासाठी ठरावीक प्रमाण असते.
C.There is definite ratio in which the substances are mixed
C.معین تناسب میں مواد کو مرکب کیا جاتا ہے

D.वरीलपैकी एकही नाही
D.None of the above
D.ان میں سے کوئی بھی نہیں

Answer: A.मिश्रण तयार करण्यामध्ये रासायनिक प्रक्रियेचा समावेश नाही.
A.No chemical reaction is involved in making of a mixture
A.-ایک مرکب تیار کرنے میں کوئی کیمیکل ردعمل شامل نہیں ہوتا

139 दिलेल्या पर्यायांपैकी कोणता पर्याय दिलेल्या मुख्य आकृतीचे तंतोतंत प्रतिबिंब आहे? (लक्षात घ्या की आरसा मुख्य आकृतीच्या डाव्या बाजूला आहे.)

Which of the following choices is the exact mirror image of the main figure (Please note that the mirror .present on the left side of the main figure.)

نیچےدیئے گئے اختیارات میں سے، کونسا انتخاب آئینہ کے عکس میں اصلی شکل کا ہوگا؟ (براۂے کرم نوٹ کریں کہ آئینہ آصل شکل کے بائیں جانب موجود ہے۔)

मुख्य आकृती
Main Figure
اصلی شکل

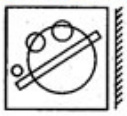

उत्तरासाठी पर्यायी आकृत्या
Answer Figure
جوابی شکل

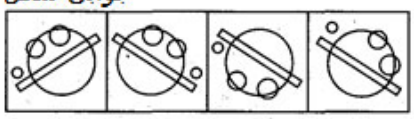

A B C D

A. (A)

B. (B)

C. (C)

D. (D)

Answer: B. (B)

140 $\sqrt[2]{1296} = ?$

A. 12

B. 36

C. 13

D. 14

Answer: B. 36

141 सूचना : खालील प्रत्येक प्रश्नात दोन विधाने I आणि II दिलेले आहेत. हे विधान एकतर स्वतंत्र कारण असू शकतात किंवा स्वतंत्र कारणांचे परिणाम असू शकतात. यांपैकी एक विधान इतर विधानाचा परिणाम असू शकतो. दोन्ही विधाने वाचा आणि खालीलपैकी कोणत्या उत्तराचा पर्याय या दोन्ही विधानांमधील संबंधांचे वर्णन करतो ते ठरवा.

विधान :

I. सरकारने अलीकडे विनाअनुदानित संस्थांमार्फत दिल्या जाणाऱ्या व्यावसायिक अभ्यासक्रमांसाठी शुल्क निश्चित केले आहे जे की गेल्या वर्षी आकारलेल्या शुल्कांपेक्षा फार कमी आहेत.

DIRECTIONS: Below in each question are given two statements I and II. These statements may be either independent causes or may be effects of independent causes. One of these statements may be the effect of the other statement. Read both the statements and decide which of the following answer choice correctly depicts the relationship between these two statements.

Statements:

I. The government has recently fixed the fees for professional courses offered by the unaided institutions which are much lower than the fees charged last year.
II. The parents of the aspiring students launched a severe agitation last year protesting against the high fees charged by the unaided institutions.

ہدایات: نیچے ہر سوال میں دو بیانات I اور II آ تو یہ بیانات یا تو آزاد وجوہات کے اثرات ہو سکتے ہیں۔ انہیں گئے ہیں۔ دیے گئے بیانات میں سے ایک بیان دوسرے کا اثر ہو سکتا ہے۔دونوں بیانات پڑھیں اور فیصلہ کریں کہ نیچے دیے گئے کس جواب کا انتخاب ان دونوں بیانات کے در میان تعلق کو ٹھیک سے ظاہر کرتا ہے۔

بیانات:
I - حکومت نے حال ہی میں غیرفلاحی اداروں میں پیشہ ورانہ کورسز کی فیسوں کا اعلان کیا ہے جو پچھلے سال کے مقابلے میں کافی کم ہیں۔
II - پچھلے سال داخلے کے خواہش مند طلباء کے والدین نے ان غیرفلاحی اداروں کی بھاری فیسوں کے خلاف احتجاج کرتے ہوئے شدید غم و غصّے کا اظہار کیا تھا ۔

A.विधान I कारण आहे आणि विधान II त्याचा परिणाम आहे;
A.Statement I is the cause and statement II is its effect;
A. بیان نمبر I وجہ ہے اور بیان نمبر II اس کا اثرہے۔

B.विधान II कारण आहे आणि विधान I त्याचा परिणाम आहे;
B.Statement II is the cause and statement I is its effect;
B. بیان نمبر II وجہ ہے اور بیان نمبر I اس کا اثرہے۔

C.विधान I आणि II दोन्ही स्वतंत्र कारणे आहेत;
C.Both the statements I and II are independent causes;
C. دونوں بیانات I اور II آزاد وجوہات ہیں۔

D.विधान I आणि II दोन्ही काही सामान्य कारणांचे परिणाम आहेत;
D.Both the statements I and II are effects of independent causes;
D. دونوں بیانات نمبر I اور نمبر II آزاد وجوہات کے اثرات ہیں۔

Answer: B.विधान II कारण आहे आणि विधान I त्याचा परिणाम आहे;
B.Statement II is the cause and statement I is its effect;
B. بیان نمبر II وجہ ہے اور بیان نمبر I اس کا اثرہے۔

142

सूचना: दिलेल्या पर्यायांमधून श्रेणी पूर्ण करणारी योग्य आकृती निवडा.

DIRECTIONS: Complete the series by choosing right figure from the given choices.

ہدایات: دیئے گئے اختیارات میں سے صحیح شکل کو چن کر سلسلہ کو مکمل کیجیئے

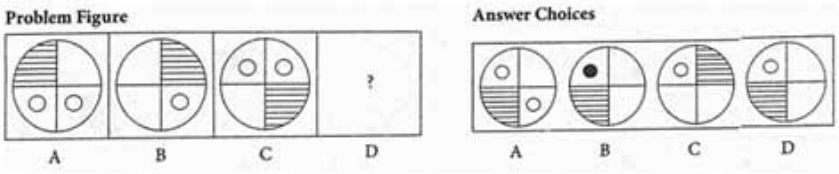

A. (A)

B. (B)

C. (C)

D. (D)

Answer: D. (D)

143 खालीलपैकी शुद्ध शब्द कोणता ?

A.गिराईक

B.गिर्हाईक

C.गिऱ्हाईक

D.गिऱ्हाइक

Answer: C.गिऱ्हाईक

144 कार्यालयाची शपथ राष्ट्रपतींना यांच्याद्वारे दिली जाते.

The oath of office is administered to the President by the:

صدر کو عہدے کا حلف دلواتا ہے

A.भारताचे मुख्य न्यायमूर्ती
A.Chief Justice of India
A. بھارت کے چیف جسٹس

B.लोकसभेचे सभाध्यक्ष
B.Speaker of the Lok Sabha
B. لوک سبھا کی اسپیکر

C.उप राष्ट्रपती
C.Vice President
C. نائب صدر

D.पंत प्रधान
D.Prime Minister
D. وزیراعظم

Answer: A.भारताचे मुख्य न्यायमूर्ती
A.Chief Justice of India
A. بھارت کے چیف جسٹس

145 एका विशिष्ट सांकेतिक भाषेमध्ये, जर CIRCUMSTANCE हा शब्द CRUSACICMTNE असा कूटबध्द केला जात असेल, HAPPINESS हा शब्द त्या भाषेत कसा कूटबध्द केला जाईल?

In a certain code language, if the word CIRCUMSTANCE is coded as CRUSACICMTNE, then how is the word HAPPINESS coded in that language?

ایک مخصوص ضابطے کی زبان میں، اگر لفظ CIRCUMSTANCE کو CRUSACICMTNE لکھاجاتاہے، تو اس زبان میں لفظ HAPPINESS کو کیسے لکھاجائیگا؟

A.HPEISAPNS
A.HPEISAPNS
A.HPEISAPNS

B.HPISEAPNS
B.HPISEAPNS
B.HPISEAPNS

C.HPIESPANS
C.HPIESPANS
C.HPIESPANS

D.HPIESAPNS
D.HPIESAPNS
D.HPIESAPNS

Answer: D.HPIESAPNS
D.HPIESAPNS
D.HPIESAPNS

146 Choose the word which is most similar in meaning to the given word.
BENEFICIAL

A.Advantageous

B.Disadvantageous

C.Unfavourable

D.Adverse

Answer: A.Advantageous

147 **सूचना:** एका घनाकृतीच्या तीन अवस्था दाखविल्या आहेत. त्यांवर अवलंबून हे शोधून काढा की दिलेल्या घनाकृतीमध्ये 2 या अंकाच्या विरुद्ध बाजूला कोणता अंक असेल?

DIRECTIONS: Three positions of a cube are given. Based on them, find out, which number is found opposite number 2 in a given cube?

ہدایات: ایک کیوب کی تین حالتیں دی گئی ہیں۔ ان کی بنیاد پر، دریافت کیجیئے، کونسا نمبرکیوب میں دیئے گئے 2 نمبر کی اپوسٹ ہے ؟



A. 3

B. 5

C. 1

D. 6

Answer: D. 6

148 मानवात किमान ऐकण्याची कंपन क्षमता इतकी असते

The lowest audible frequency for a human being is about

کسی انسان کی سب سے کم قابل سماعت فریکوینسی تقریبا ------- ہوتی ہے۔

A.5Hz
A.5Hz
A.5Hz

B.20Hz
B.20Hz
B.20Hz

C.15Hz
C.15Hz
C.15Hz

D.200Hz
D.200Hz
D.200Hz

Answer: B.20Hz
B.20Hz
B.20Hz

149 सूचना: खालील प्रश्नांमध्ये दिलेल्या पर्यायांमधून संबंधित अक्षर/शब्द/संख्या निवडा.

दिलेला संच : (2,3,5)

DIRECTIONS: In the following question, select the related letter/word/number from the given alternatives.

Given set : (2,3,5)

سمت: مندرجہ ذیل سوال میں، دیے گئے متبادل سے متعلقہ حرف/لفظ/نمبر منتخب کریں۔

(دیا گیا سیٹ: 2,3,5)

A.(4, 3, 5)
A.(4, 3, 5)
A.(4, 3, 5)

B.(6, 8, 9)
B.(6, 8, 9)
B.(6, 8, 9)

C.(2, 4, 6)
C.(2, 4, 6)
C.(2, 4, 6)

D.(7,11, 13)
D.(7,11, 13)
D.(7,11, 13)

Answer: D.(7,11, 13)
D.(7,11, 13)
D.(7,11, 13)

150 गरोदर असताना संसर्ग झाल्यास मतिमंदत्व येऊ शकते

Infection during pregnancy can lead to mental retardation

حمل کے دوران انفیکشن سے دماغی کمزوری ہوسکتی ہے

A.खरे
A.true
A.صحیح

B.खोटे
B.false
B.غلط

C.दोन्हीपैकी (a) किंवा (b) नाही
C.Neither (a) nor (b)
C.نہ ہی ((a اور نہ ہی(b)

D.सांगता येणार नाही
D.Can’t Say
D.کہہ نہیں سکتے

Answer: A.खरे
A.true
A.صحیح

151

विधान:
जम्मू-काश्मीरमधील दहशतवाद वाढत आहे.

कृतीचा कोर्स:
I. भारतीय जवानांनाकडे जम्मू व काश्मीरचा पराभव करा.
II. राज्यात कर्फ्यू घोषित करा.

Statement:
Terrorism in Jammu and Kashmir is increasing.

Course of actions:
I. Hand Jammu and Kashmir over to Indian Army.
II. Announce curfew in the state.

بیان:
جموں و کشمیر میں دہشت گردی بڑھ رہی ہے۔

لائحہ عمل:
I۔جموں و کشمیر انڈین آرمی کے حوالے کر دیں۔
II۔ ریاست میں کرفیو کا اعلان کر دیں ۔

A.फक्त I अनुसरून आहे
A.Only I follows
A. صرف I لاگو ہو گا۔

B.फक्त II अनुसरण करते आहे
B.Only II follows
B. صرف II لاگو ہو گا۔

C.एकतर I किंवा II अनुसरून आहे
C.Either I or II follows
C. I یا II میں سے ایک لاگو ہو گا۔

D.I किंवा II दोन्हीपैकी काहीही अनुसरण करत नाही
D.Neither I nor II follows
D. I اور II میں سے کوئی بھی لاگو نہیں ہو گا۔

Answer:

D.I किंवा II दोन्हीपैकी काहीही अनुसरण करत नाही
D.Neither I nor II follows
D. I اور II میں سے کوئی بھی لاگو نہیں ہو گا۔

152

खालीलपैकी अत्यंत संकुचित होण्यासारखे काय आहे?

Which of the following is highly compressible?

مندرجہ ذیل میں سے کس کو بہت دبایا جا سکتا ہے؟

A.घन
A.Solid
A.ٹھوس

B.गॅस
B.Gas
B. گیس

C.द्रव
C.Liquid
C. مائع

D.वरील एकही नाही
D.None of the above
D. مندرجہ بالا میں سے کوئی نہیں

Answer: B.गॅस
B.Gas
B. گیس

153 **सूचना:** खालील प्रश्नात प्रश्नातील आकृती उत्तरातील पर्यायांपैकी कोणत्या पर्यायी आकृतीत अंतर्भूत आहे?

DIRECTIONS: In the given question find the answer figure in which question figure is embedded.

ہدایات: دیئے گئے سوال میں، جواب کی شکل کو دریافت کیجیئے جو سوال میں سرایت کر گئی ہے۔

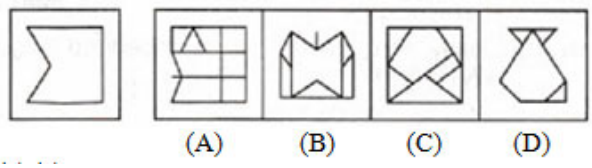

A. (A)

B. (B)

C. (C)

D. (D)

Answer: A. (A)

154 सूचना: अर्थपूर्ण परिच्छेद निर्माण करण्यासाठी, खाली दिलेली (P), (Q) (R), (S) आणि (T) ही पाच वाक्ये योग्य अनुक्रमाने पुनर्रचना करा; त्यांनतर खालील प्रश्नांची उत्तर द्या.

P. उंदराच्या परिश्रमाने तो मुक्त झाला होता.
Q. तो जाळ्यात अडकला होता.
R. सिंहाला आपल्या क्षमतेचा गर्व होता.
S. तो जाळ्यातून सुटू शकला नाही.
T. त्याने उंदराच्या कमजोरीला तुच्छ लेखले.

पुनर्रचना केल्यानंतर खालीलपैकी कोणते वाक्य दुसरे असेल?

DIRECTION: Rearrange the following five sentences (P), (Q), (R), (S) and (T) in the proper sequence to form a meaningful paragraph; then answer the questions given below them.
P. He was set free by the exertions of the mouse.
Q. He was caught in a net.
R. A lion was proud of his strength.
S. He could not escape from the net.
T. He despised the weakness of the mouse.

Which of the following should be the SECOND sentence after rearrangement?

ہدایات: ان پانچ جملوں (P)، (Q)، (R)، (S) اور (T) کو با معنی پیرا بنانے کے لئے دوبارہ ترتیب دیجئے، پھر نیچے دے گئے سوالوں کے جواب دیجئے

P. اسکو چوہوں کی سرگرمی سے آزاد کیا گیا.
Q. اسکو جال میں فنسایا گیا.
R. شیر کو اپنی طاقت پر گرور تھا.
S. وو جال سے بھاگ نہیں سکھتا . .
T. اسکو چوہوں کی کمزوری سے نفرت تھی.

دوبارہ ترییب دینے کے بعد کون سا جملہ دوسرا ہونا چاہیے

A.T
A.T
A.T

B.R
B.R
B.R

C.P
C.P
C.P

D.Q
D.Q
D.Q

Answer: A.T
A.T
A.T

155 सरळ रूप द्या:
7149 + 3487 + 2983 + 6731 + 8971 =?

Simplify:
7149 + 3487 + 2983 + 6731 + 8971 =?

آسان بنائیں:
7149 + 3487 + 2983 + 6731 + 8971 =?

A.23140
A.23140
A.23140

B.78250
B.78250
B.78250

C.29321
C.29321
C.29321

D.32051
D.32051
D.32051

Answer: C.29321
C.29321
C.29321

156 1 लीप वर्ष = ……..

1 leap year = ……..

ایک لیپ کا سال = ……

A.367 दिवस
A.367 Days
A.367دن

B.365 दिवस
B.365 Days
B.365دن

C.366 दिवस
C.366 Days
C.366دن

D.यांपैकी कोणतीही नाही
D.None of these
D.ان میں سے کوئی نہیں

Answer:

C.366 दिवस
C.366 Days
C.366دن

157 सूचना: खालील प्रश्नांमध्ये दिलेल्या पर्यायांमधून संबंधित अक्षर समूह निवडा.
FHEG : JLIK :: PROQ : ?

DIRECTIONS: In the following question, select the related group of letters from the given alternatives.

FHEG : JLIK :: PROQ : ?

سمت: مندرجہ ذیل سوال میں، دیے گئے متبادل میں سے حروف کا متعلقہ گروپ منتخب کریں۔

FHEG : JLIK :: PROQ : ?

A.TVSU
A.TVSU
A.TVSU

B.VTUS
B.VTUS
B.VTUS

C.TVUS
C.TVUS
C.TVUS

D.SUVT
D.SUVT
D.SUVT

Answer: A.TVSU
A.TVSU
A.TVSU

158 एखाद्या तान्ह्या मुलात यांपैकी कोणतेही लक्षण दिसून आल्यास ते मूल मानसिक विकाराने पिडीत असण्याची शक्यता आहे

If an infant shows any of these signs is likely who suffering from mental disorder

اگر کوئی شیرخوار بچہ ان میں سے کوئی علامت ظاہر کرے تو اس کا امکان ہے کہ وہ ذہنی بیماری سے متاثرہو

A.उशिरा कूस पालटणे, चालणे, रांगणे
A.rolling over, walking, crawling late
A.تاخیر سے ھڑکنا، چلنا، پیٹ کے بل چلنا

B.शिकण्यात त्रास
B.difficulty learning
B.سیکھنے میں مشکلات کا سامنا کرنا

C.वस्तूंवर ताबा मिळवण्यात मंद
C.slow to master things
C.اصل چیزوں کو سیکھنے میں سست

D.वरीलपैकी सर्व
D.all of above
D.درج بالا میں سے سبھی

Answer: D.वरीलपैकी सर्व
D.all of above
D.درج بالا میں سے سبھی

159 आयसीसी चॅम्पियन्स 2017 _____येथे आयोजित केली गेली होती –

The ICC Champions 2017 was held in –

آئی سی سی چیمپئن 2017 _____ میں ہوا تھا

A.भारत
A.India
A.ہندوستان

B.दक्षिण आफ्रिका
B.South Africa
B.ساؤتھ افریقہ

C.इंग्लंड
C.England
C.انگلینڈ

D.ऑस्ट्रेलिया
D.Australia
D.آسٹریلیا

Answer:	C.इंग्लंड C.England C.انگلینڈ

160	2 ऑक्टोबर 1869 रोजी आठवड्याचा कोणता वार होता? What was the day of week on 2nd October 1869? 2 اکتوبر 1869 کوہفتہ کا کونسا دن تھا؟
	A.शुक्रवार A.Friday A.جمعہ
	B.शनिवार B.Saturday B.سنیچر
	C.रविवार C.Sunday C.اتوار
	D.सोमवार D.Monday D.پیر
Answer:	B.शनिवार B.Saturday B.سنیچر

161 सूचना: अर्थपूर्ण परिच्छेद निर्माण करण्यासाठी, खाली दिलेली (P), (Q) (R), (S) आणि (T) ही पाच वाक्ये योग्य अनुक्रमाने पुनर्रचना करा; त्यांनतर खालील प्रश्नांची उत्तर द्या.

P. उंदराच्या परिश्रमाने तो मुक्त झाला होता.
Q. तो जाळ्यात अडकला होता.
R. सिंहाला आपल्या क्षमतेचा गर्व होता.
S. तो जाळ्यातून सुटू शकला नाही.
T. त्याने उंदराच्या कमजोरीला तुच्छ लेखले.

पुनर्रचना केल्यानंतर खालीलपैकी कोणते वाक्य चौथे असेल

DIRECTION: Rearrange the following five sentences (P), (Q), (R), (S) and (T) in the proper sequence to form a meaningful paragraph; then answer the questions given below them.
P. He was set free by the exertions of the mouse.
Q. He was caught in a net.
R. A lion was proud of his strength.
S. He could not escape from the net.
T. He despised the weakness of the mouse.

Which of the following should be the FOURTH sentence after rearrangement?

ہدایات: ان پانچ جملوں (P)، (Q)، (R)، (S) اور (T) کو با معنی پیرا بنانے کے لئے دوبارہ ترتیب دیجئے، پھر نیچے دے گئے سوالوں کے جواب دیجئے

P. اسکو چوہوں کی سرگرمی سے آزاد کیا گیا.
Q. اسکو جال میں فنسایا گیا.
R. شیر کو اپنی طاقت پر گرور تھا.
S. وو جال سے بھاگ نہیں سکھتا . .
T. اسکو چوہوں کی کمزوری سے نفرت تھی.

دوبارہ ترییب دینے کے بعد کون سا جملہ چوتھا ہونا چاہیے؟

A.S
A.S
A.S

B.R
B.R
B.R

C.Q
C.Q
C.Q

D.P
D.P
D.P

Answer: A.S
A.S
A.S

162 Out of the given options, choose the one which is the correct indirect speech of the sentence given below.
The doctor said, “The patient died in the night.”

A.The doctor says that the patient died in the night.

B.The doctor says that the patient died during the night.

C.The doctor says that the patient has died in the night.

D.The doctor said that the patient had died in the night.

Answer: D.The doctor said that the patient had died in the night.

163 सूचना: दिलेल्या पर्यायांमधून श्रेणी पूर्ण करणारी योग्य आकृती निवडा.

DIRECTIONS: Complete the series by choosing right figure from the given choices.

ہدایات: دیئے گئے اختیارات میں سے صحیح شکل کو چن کر سریز کو مکمل کیجیئے

प्रश्न आकृत्या
Question Figures
سوالی شکلیں

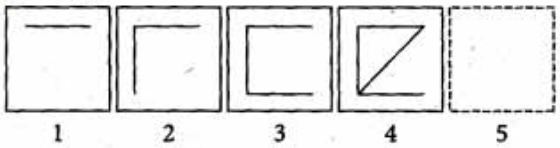

उत्तरादाखल पर्यायी आकृत्या
Answer Figures
جوابی شکلیں

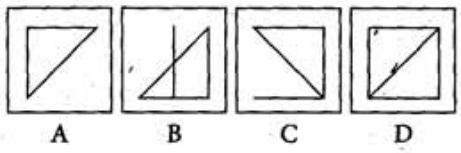

A. (A)

B. (B)

C. (C)

D. (D)

Answer: D. (D)

164 ‘नामांकित’ या शब्दाचा विरुद्धार्थी शब्द कोणता ?

A.कुख्यात

B.प्रसिद्ध

C.विख्यात

D.नावाजलेला

Answer: A.कुख्यात

165 **सूचना:** खालील प्रश्नात असे 3 घटक आहेत ज्यांचा परस्परांशी विशिष्ट संबंध आहे. समान संबंध वर्तुळाच्या संचांनी दर्शविलेला आहे, प्रत्येक वर्तुळ त्याचा आकार कितीही असला तरी, एका घटकाचे प्रतिनिधित्व करते. योग्य वर्तुळाच्या संचांशी खालील घटकांच्या जोड्या लावा.

DIRECTION: The question below has three items having certain relationship among them. The same relationship is expressed by sets of circles, each circle representing one item irrespective of its size. Match the items with right set of circles.

ہدایت:مندرجہ ذیل سوال میں تین آئٹم ہیں جن کے مابین مختلف تعلقات ہیں۔ دائروں کے ایک سیٹ کے ذریعہ یکساں تعلق ظاہر کیا جاتا ہے، ہر دائرہ سائز سے قطع نظر ایک آئٹم کی نمائندگی کرتا ہے۔ آئٹم کو دائروں کے درست سیٹ کے ساتھ ملائیں۔

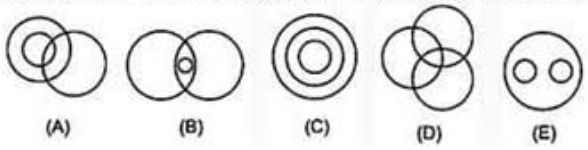

रिंग, अलंकार, हिऱ्याची अंगठी

Rings, Ornaments, Diamond rings

انگوٹھیاں، زیورات، ہیرے کی انگوٹھیاں۔

A. (C)

B. (B)

C. (A)

D. (D)

Answer: A. (C)

166 तांदळाचे मिश्रण ₹3.00 प्रति किलो दराने विक्री केले जाते. ₹2.10 आणि ₹2.52 प्रति किग्रॅचा तांदूळ एकत्र करून हे मिश्रण तयार केले गेले आहे. जर 25% नफा मिळवला गेला तर मिश्रणामधील स्वस्त पासून ते जास्त किमतीच्या दर्जाच्या तांदळाचे काय गुणोत्तर होते

A mixture of rice is sold at ₹3.00 per kg. This mixture is formed by mixing the rice of ₹2.10 and ₹2.52 per kg. What is the ratio of price of cheaper to the costlier quality in the mixture if the profit of 25% is being earned.

1چاولوں کا ایک مرکب ₹3.00 فی کلو گرام فروخت کیا جاتا ہے، یہ مرکب ₹2.10 اور ₹2.52 فی کلو گرام والے چاولوں کو ملا کر بنایا جاتا ہے، اگر 25% نفع کمایا جائے تو اس مرکب میں سستے چاول اور مہنگے چاولوں کے مابین کیا نسبت ہوگی؟

A.5 : 2
A.5 : 2
A.2 :5

B.2 : 7
B.2 : 7
B.7: 2

C.2 : 5
C.2 : 5
C.5:2

D.15 : 8
D.15 : 8
D.8 : 15

Answer: C.2 : 5
C.2 : 5
C.5:2

167 19 × 19 + 81 × 81 =?

19 × 19 + 81 × 81 =?

19 × 19 + 81 × 81 =?

A.6922
A.6922
A.6922

B.6000
B.6000
B.6000

C.6850
C.6850
C.6850

D.7000
D.7000
D.7000

Answer:
A.6922
A.6922
A.6922

168 सूचना: खालील माहितीचा अभ्यास करुन दिलेल्या प्रश्नांची उत्तरे द्या.
A, B, C, D, E, F, G आणि H हे 8 मित्र एका वर्तुळामध्ये केंद्रासमोर बघत बसलेले आहेत. AC, DG, HE आणि FB एकमेकांच्या बाजूला बसलेले आहेत. A देखील H च्या बाजूला बसलेला आहे. B हा H च्या उजवीकडून दुसरा आहे. E हा C च्या उजवीकडून तिसरा आहे.
A च्या डावीकडून दुसरा कोण आहे?

DIRECTIONS: Study the following information to answer the given questions.
There are 8 friends A, B, C, D, E, F, G and H seated in a circle facing the centre. AC, DG, HE and FB are seated adjacent to each other. A is also seated adjacent to H. B is 2nd to the right of H. E is 3rd to the right of C.
Who is 2nd to the left of A?

ہدایات: دیے گئے سوالات کے جواب دینے کے لیے مندرجہ ذیل معلومات کا مطالعہ کریں۔
8 دوست G، F، E، D، C، B، A اور H ایک دائرے میں مرکز کا رخ کیے ہوئے بیٹھے ہیں۔ ایک دوسرے سے FB اور AC، DG، HE کے دائیں سے تیسرا ہے۔ C ، Eکے دائیں سے دوسرا ہے۔ H ، Bکے بغل میں بھی بیٹھا ہے۔H ، Aملے ہوئے بیٹھے ہیں۔
A کے بائیں سے دوسرا کون ہے؟

A.D
A.D
A.D

B.G
B.G
B.G

C.F
C.F
C.F

D.निर्धारित केले जाऊ शकत नाही.
D.Cannot be determined
D.تعین نہیں کیا جا سکتا ہے

Answer: D.निर्धारित केले जाऊ शकत नाही.
D.Cannot be determined
D.تعین نہیں کیا جا سکتا ہے

169 सूचना: खालील प्रश्नांमध्ये दिलेल्या पर्यायांमधून संबंधित अक्षर/शब्द/संख्या निवडा.

पक्षी : उडणे::

DIRECTIONS: In the following question, select the related letter/word/number from the given alternatives.

Bird : Fly ::

سمت: مندرجہ ذیل سوال میں، دیے گئے متبادل سے متعلقہ حرف/لفظ/نمبر منتخب کریں۔

چڑیا : اڑنا ::

A.हवा : पतंग
A.Air : Kite
A.ہوا : پتنگ

B.मासापोहणे
B.Fish:Swim
B.مچھلی:تیرنا

C.वृक्ष : पाने
C.Tree : Leaves
C.درخت : پتیاں

D.अतिक्रमण : व्यापणे
D.Encroachment : Occupy
D.قبضہ : قبضہ کرنا

Answer: B.मासापोहणे
B.Fish:Swim
B.مچھلی:تیرنا

170 संयुक्त कुटुंबाचे फायदे हे आहेत-

Benefits of a joint family are

ایک مشترکہ خاندان کے فوائد ہیں

A.मुलानां चांगले वातावरण मिळू शकते
A.Children can get better environment
A. بچوں کو بہتر ماحول مل سکتا ہے

B.काही समस्या असल्यास अनेक सदस्य काळजी घेतात
B.Many members are there to take care in case of any problem
B. ہنگامی مسئلہ کی صورت میں دیکھ بھال کرنے کے لئے بہت سے ارکان ہوتے ہیں

C.सुरक्षेच्या समस्या कमी असतात
C.There are less security problems
C. اس میں حفاظت کے مسائل کم ہیں

D.वरील सर्व
D.All the above
D. مندرجہ بالا تمام

Answer: D.वरील सर्व
D.All the above
D. مندرجہ بالا تمام

171 सूचना: दिलेल्या पर्यायांमधून श्रेणी पूर्ण करणारी योग्य आकृती निवडा.

DIRECTIONS: Complete the series by choosing right figure from the given choices.

ہدایات: دیئے گئے اختیارات میں صحیح شکل کا انتخاب کر کے سیریز کو مکمل کیجیئے۔

Question Figures

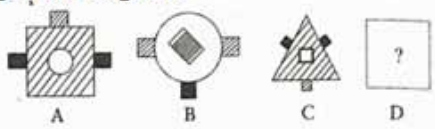

Answer Figures

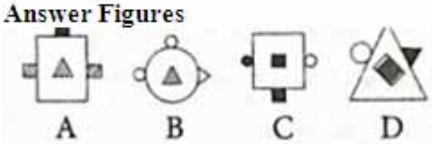

A. (A)

B. (B)

C. (C)

D. (D)

Answer: A. (A)

172 पुढील जोडशब्द पूर्ण करा . 'दाणा----------'

A.वाणा

B.पानी

C.पाणी

D.वळ

Answer: C.पाणी

173 खालील प्रश्नांमधील गहाळ अंक शोधा.

Find the missing number in the following questions.

نیچے کے سوالات سے گمنام نمبر کھوجے

1	2	3
11	7	5
120	45	?

A. 19

B. 17

C. 16

D. 15

Answer: C. 16

174 सूचना: खालील माहितीचा अभ्यास करुन दिलेल्या प्रश्नांची उत्तरे द्या.
A, B, C, D, E, F, G आणि H हे 8 मित्र एका वर्तुळामध्ये केंद्रासमोर बघत बसलेले आहेत. AC, DG, HE आणि FB एकमेकांच्या बाजूला बसलेले आहेत. A देखील H च्या बाजूला बसलेला आहे. B हा H च्या उजवीकडून दुसरा आहे. E हा C च्या उजवीकडून तिसरा आहे.
C च्या डावीकडून तिसरा कोण आहे?

DIRECTIONS: Study the following information to answer the given questions.
There are 8 friends A, B, C, D, E, F, G and H seated in a circle facing the centre. AC, DG, HE and FB are seated adjacent to each other. A is also seated adjacent to H. B is 2nd to the right of H. E is 3rd to the right of C.
Who is 3rd to the left of C?

ہدایات: دیے گئے سوالات کے جواب دینے کے لیے مندرجہ ذیل معلومات کا مطالعہ کریں۔
8 دوست G، F، E، D، C، B، A اور H ایک دائرے میں مرکز کا رخ کیے ہوئے بیٹھے ہیں۔ HE، DG، AC اور FB ایک دوسرے سے ملے ہوئے بیٹھے ہیں۔ A ، H کے بغل میں بھی بیٹھا ہے۔ B ، H کے دائیں سے دوسرا ہے۔ E ، C کے دائیں سے تیسرا ہے۔
C کے بائیں سے تیسرا کون ہے؟

A.G
A.G
A.G

B.F
B.F
B.F

C.B
C.B
C.B

D.यांपैकी कोणतीही नाही
D.None of these
D.ان میں سے کوئی نہیں

Answer: B.F
B.F
B.F

175 Fill in the blank with the correct article.
_____ tall man whom you met last night is my uncle.

A.The

B.A

C.An

D.No article required

Answer: A.The

176 खालीलपैकी काय भारतामधून जाते?

Which of the following passes through India?

درج ذیل میں سے کون سا ہندوستان سے گذرتا ہے؟

A.विषुववृत्त
A.Equator
A.خط استوا

B.मकरवृत्त
B.Tropic of Capricorn
B.خط جدی

C.मुख्य रेखावृत्त
C.Prime Meridian
C.نصف النہار

D.कर्कवृत्त
D.Tropic of Cancer
D.خط سرطان

Answer: D.कर्कवृत्त
D.Tropic of Cancer
D.خط سرطان

177 सूचना : खालील दिलेल्या प्रश्नामध्ये काही विधाने आणि काही निष्कर्ष आहेत. सामन्यात: ज्ञात तथ्यांपेक्षा ते वेगळे असतील तर दिलेली विधाने तुम्हाला सत्य मानवी लागतील आणि त्यानंतर दिलेल्या विधानाचे अनुकरण दिलेल्यापैकी कोणता निष्कर्ष तार्किकदृष्ट्या करतो ते ठरवा.
विधाने:
P ≥ Q < R = M, R ≥ F
निष्कर्ष :
I. M ≥ P
II.R > P

DIRECTIONS: In the question below, there are few statements followed by few conclusions. You have to take the given statements to be true even if they seem to be at variance with commonly known facts and then decide which of the given conclusion logically follow(s) from the given statements.

Statements:
P ≥ Q < R = M, R ≥ F
Conclusions:
I. M ≥ P
II.R > P

ہدایات: مندرجہ ذیل سوال میں، کچھ بیانات کے بعد کچھ نتائج موجود ہیں. اگر آپ کو عام طور پر جانے جاتے حقائق کے ساتھ بھی متغیر ہونے لگے تو بھی آپ دئے گئے بیانات دماغ میں رکھیں اور پھر اس بات کا فیصلہ کریں کہ ذیل میں دیا گیا کونسا نتیجہ منطقانہ طور پر دیے گئے بیانات کی پیروی کرتا ہے.

بیانات:
P ≥ Q < R = M, R ≥ F
نتائج:
M ≥P .I
R >P .II

A.फक्त I निष्कर्ष खरा आहे
A.Only conclusion I is true
A.صرف نتیجہ I درست ہے

B.फक्त II निष्कर्ष खरा आहे
B.Only conclusion II is true
B.صرف نتیجہ II درست ہے

C.I किंवा II यापैकी एक निष्कर्ष खरा आहे
C.Either conclusion I or II is true
C.یا I یا II نتیجہ درست ہے

D.I व II हे दोन्हीही निष्कर्ष खरे नाहीत
D.Neither conclusion I nor II is true
D.نتیجہ درست ہے II نہ ہی I نہ ہی

Answer: D.I व II हे दोन्हीही निष्कर्ष खरे नाहीत
D.Neither conclusion I nor II is true
D.نتیجہ درست ہے II نہ ہی I نہ ہی

178 त्रिकोणाचे क्षेत्रफळ 216 सेंमी^{2} आहे आणि त्याच्या बाजू 3:4:5 या गुणोत्तरात आहे. त्या त्रिकोणाची परिमिती काढा?

The area of triangle is 216 cm^2 and their sides are in the ratio 3 : 4 : 5. What is the perimeter of the triangle?

مثلث کا احاطہ 216 مربع سینٹی میٹر ہے، اور انکی طرفیں3: 4: 5 کے تناسب میں ہیں۔ مثلث کا احاط کیا ہے؟

A.6 सेंमी
A.6 cm
A.6 سینٹی میٹر

B.12 सेंमी
B.12 cm
B.12 سینٹی میٹر

C.36 सेंमी
C.36 cm
C. 36 سینٹی میٹر

D.72 सेंमी
D.72 cm
D.72 سینٹی میٹر

Answer: D.72 सेंमी
D.72 cm
D.72 سینٹی میٹر

179 कोणाला "ग्रॅन्ड ओल्ड मॅन ऑफ इंडिया" म्हटले जाते?

Who was called the “Grand Old Man of India”?

کس کو "ہندوستان کا عظیم پرانا انسان" کہا جاتا تھا؟

A.महात्मा गांधी
A.Mahatma Gandhi
A.مہاتما گاندھی

B.बाळ गंगाधर टिळक
B.Bal Gangadhar Tilak
B.بال گنگا دھر تلک

C.लाला लाजपत राय
C.Lala Lajpat Rai
C.لالا لاجپت رائے

D.दादाभाई नौरोजी
D.Dadabhai Naoroji
D.دادا بھائی نوروجی

Answer:

D.दादाभाई नौरोजी
D.Dadabhai Naoroji
D.دادا بھائی نوروجی

180

निर्देश: दिलेल्या अंक मालिकेतील चुकीची संज्ञा शोधा:

6, 12, 36, 144, 722, 4320, 30240

DIRECTIONS: Find the wrong term in the given number series.

6, 12, 36, 144, 722, 4320, 30240

ہدایت دے گئے نمبرس سرج مے غلط نمبر کھوجے

6, 12, 36, 144, 722, 4320, 30240

A.36
A.36
A.36

B.144
B.144
B.144

C.722
C.722
C.722

D.4320
D.4320
D.4320

Answer:

C.722
C.722
C.722

181 विशेष गरज असलेल्या मुलांचे किती प्रकार आहेत.

How many types of special needs children are there.

خصوصی ضروریات والے بچوں کی کتنی قسمیں ہوتی ہیں۔

A.3
A.3
A.3

B.4
B.4
B.4

C.6
C.6
C.6

D.10
D.10
D.10

Answer: B.4
B.4
B.4

182 राजीव हा अरुणचा भाऊ आहे. सोनिया ही सुनिलची बहीण आहे. अरुण हा सोनियाचा मुलगा आहे. मग राजीवचे सुनिलसोबत नाते काय?

Rajiv is the brother of Arun. Sonia is the sister of Sunil. Arun is the son of Sonia. How is Rajiv related to Sunil?

راجیو ارون کا بھائی ہے. سونیا سنیل کی بہن ہے.ارون سونیا کا بیٹا ہے. راجیو کا سنیل سے کیا رشتہ ہے ؟

A.मुलगा
A.Son
A.بیٹا

B.भाऊ
B.Brother
B.بھائی

C.वडील
C.Father
C.باپ

	D.पुतण्या D.Nephew D.بتيجا
Answer:	D.पुतण्या D.Nephew D.بتيجا
183	6 ÷ 6 × 9 + 6 – 9 × 6 – 6 + 6 × 9 =? 6 ÷ 6 × 9 + 6 – 9 × 6 – 6 + 6 × 9 =? 6 ÷ 6 × 9 + 6 – 9 × 6 – 6 + 6 × 9 =?
	A.7 A.7 A.7
	B.8 B.8 B.8
	C.9 C.9 C.9
	D.10 D.10 D.10
Answer:	C.9 C.9 C.9

184 सूचना: अर्थपूर्ण परिच्छेद निर्माण करण्यासाठी, खाली दिलेली (P), (Q) (R), (S) आणि (T) ही पाच वाक्ये योग्य अनुक्रमाने पुनर्रचना करा; त्यांनतर खालील प्रश्नांची उत्तर द्या.

P. उंदराच्या परिश्रमाने तो मुक्त झाला होता.
Q. तो जाळ्यात अडकला होता.
R. सिंहाला आपल्या क्षमतेचा गर्व होता.
S. तो जाळ्यातून सुटू शकला नाही.
T. त्याने उंदराच्या कमजोरीला तुच्छ लेखले.

पुनर्रचना केल्यानंतर खालीलपैकी कोणते वाक्य पाचवे असेल?

DIRECTION: Rearrange the following five sentences (P), (Q), (R), (S) and (T) in the proper sequence to form a meaningful paragraph; then answer the questions given below them.
P. He was set free by the exertions of the mouse.
Q. He was caught in a net.
R. A lion was proud of his strength.
S. He could not escape from the net.
T. He despised the weakness of the mouse.

Which of the following should be the FIFTH sentence after rearrangement?

ہدایات: ان پانچ جملوں (P)، (Q)، (R)، (S) اور (T) کو با معنی پیرا بنانے کے لئے دوبارہ ترتیب دیجئے، پھر نیچے دے گئے سوالوں کے جواب دیجئے

P. اسکو چوہوں کی سرگرمی سے آزاد کیا گیا.
Q. اسکو جال میں فنسایا گیا.
R. شیر کو اپنی طاقت پر گرور تھا.
S. وو جال سے بھاگ نہیں سکھتا. .
T. اسکو چوہوں کی کمزوری سے نفرت تھی.

دوبارہ ترییب دینے کے بعد کون سا جملہ پانچواں ہونا چاہیے؟

A.P
A.P
A.P

B.S
B.S
B.S

C.R
C.R
C.R

D.T
D.T
D.T

For More Info And Videos About TAIT-Exam Syllabus And Other Exam Visit My Channel
TAIT च्या 30 प्रश्नपत्रिका PDF
BADSHAHimp Available Request 9765226781
WWW.YouTube.com/BADSHAHimp
Subscribe My Channel

Answer: A.P
A.P
A.P

185 बुंधा असलेली आणि सरळ उभी राहणारी झाडे _____ म्हणून ओळखली जातात.

The plants that have trunks and can stand straight are called as _____.

وہ پیڑ جنکے تنے ہوتے ہیں اور سیدھے کھڑے ہو سکتے ہیں؛ کہلاتے ہیں

A.झुडपे
A.Shrubs
A. جھاڑیاں

B.वनस्पती
B.Herbs
B. جڑی بوٹیاں

C.वेली
C.Creepers
C.بیل

D.झाडे
D.Trees
D. درخت

Answer: D.झाडे
D.Trees
D. درخت

186 36 सेकंदांमध्ये तास काट्याद्वारे काय कोन बनवला जातो?

What angle is made by hour hand in 36 sec?

گھنٹہ کی سوئی سے 36 سکنڈ میں کونسا زاویہ بنتا ہے؟

(A) $120°$

(B) $3°$

(C) $\left(\frac{3}{10}\right)^{\circ}$

(D) $\left(\frac{10}{3}\right)^{\circ}$

Answer: (C) $\left(\frac{3}{10}\right)^{\circ}$

187 खालीलपैकी पुल्लिंगी शब्द ओळखा.

A.कोल्हा

B.मांजर

C.गाय

D.बकरी

Answer: A.कोल्हा

188 सूचना: खालील प्रश्नात उत्तरातील पर्यायांपैकी कोणत्या पर्यायी आकृतीत प्रश्नातील आकृती अंतर्भूत आहे?

DIRECTIONS: In the given question find the answer figure in which question figure is embedded.

ہدایات: دیئے گئے سوال میں جواب والی شکل دریافت کیجیئے جس میں سوال والی شکل سرایت کرگئی ہے۔

Question Figure **Answer Figures**

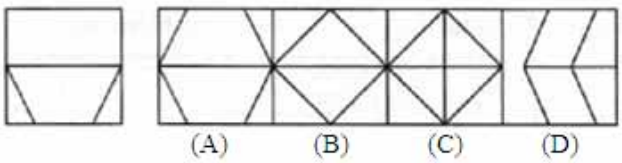

A. (A)

B. (B)

C. (C)

D. (D)

Answer: A. (A)

For More Info And Videos About TAIT-Exam Syllabus And Other Exam Visit My Channel
TAIT च्या 30 प्रश्नपत्रिका PDF
BADSHAHimp Available Request 9765226781
WWW.YouTube.com/BADSHAHimp
Subscribe My Channel

189	सरळ रूप द्या: 321043 + 421302= ? Simplify: 321043 + 421302= ? آسان بنائیں: 321043 + 421302= ?
	A.742245 A.742245 A.742245
	B.742345 B.742345 B.742345
	C.724345 C.724345 C.724345
	D.743255 D.743255 D.743255
Answer:	B.742345 B.742345 B.742345
190	आपण श्वास बाहेर टाकतो तेव्हा, आपल्या फुफुसेमध्ये – When we exhale, our lungs - سانس چھوڑتے وقت، ہمارے پھیپھڑے -
	A.आकुंचन पावतात A.Contract A.سکڑتے ہیں
	B.प्रसरण पावणे B.Expand B.پھیلتے ہیں
	C.स्थिर राहतात C.Be still C.ایک جیسے رہتے ہیں

For More Info And Videos About TAIT-Exam Syllabus And Other Exam Visit My Channel
TAIT च्या 30 प्रश्नपत्रिका PDF
BADSHAHimp Available Request 9765226781
WWW.YouTube.com/BADSHAHimp
Subscribe My Channel

D.वरीलपैकी एकही नाही
D.None of the above
D. مندرجہ بالا میں سے کوئی نہیں

Answer: A.आकुंचन पावतात
A.Contract
A.سکڑتے ہیں

191 DIRECTIONS: A sentence with an underlined word is given below. Find the Word which is most similar in meaning to the underlined word.
The road to happiness is paved with adversities.

A.Misfortunes

B.Joy

C.Satisfaction

D.Comforts

Answer: A.Misfortunes

192 सूचना: आकृती (X)मध्ये दिलेल्या आकारांचा वापर करून (a), (b), (c), (d) या आकारांमधील कोणता आकार तयार करता येईल?

DIRECTIONS: Find out which of the figure (a), (b), (c), (d) can be formed from the pieces given in fig. (X).

ہدایات: شکل (x) میں دیئے گئے ٹکڑے سے، (a)، (b)، (c)، (d) میں سے کونسی شکلیں بن سکتی ہیں دریافت کیجیئے۔

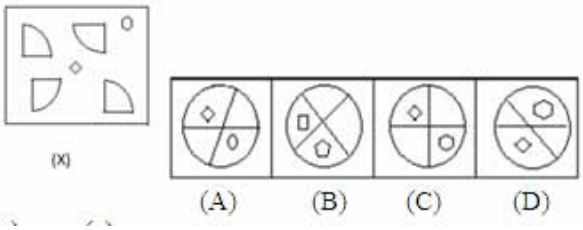

A. (A)

B. (B)

C. (C)

D. (D)

Answer: C. (C)

For More Info And Videos About TAIT-Exam Syllabus And Other Exam Visit My Channel
TAIT च्या 30 प्रश्नपत्रिका PDF
BADSHAHimp Available Request 9765226781
WWW.YouTube.com/BADSHAHimp
Subscribe My Channel

193 म्हणी पूर्ण करा - ‘उथळ पाण्याला ..... फार’

A.थरथराट

B.सरसराट

C.खळखळाट

D.फेस

Answer: C.खळखळाट

194 Out of the given four words only one is spelt correctly. Find the word that is correctly spelt.

A.Achieve

B.Accross

C.Accomodayte

D.Agressione

Answer: A.Achieve

195 सूचना: खालील माहितीचा अभ्यास करुन दिलेल्या प्रश्नांची उत्तरे द्या.
A, B, C, D, E, F, G आणि H हे 8 मित्र एका वर्तुळामध्ये केंद्रासमोर बघत बसलेले आहेत. AC, DG, HE आणि FB एकमेकांच्या बाजूला बसलेले आहेत. A देखील H च्या बाजूला बसलेला आहे. B हा H च्या उजवीकडून दुसरा आहे. E हा C च्या उजवीकडून तिसरा आहे.
A च्या उजवीकडे दुसरा कोण आहे?

DIRECTIONS: Study the following information to answer the given questions.
There are 8 friends A, B, C, D, E, F, G and H seated in a circle facing the centre. AC, DG, HE and FB are seated adjacent to each other. A is also seated adjacent to H. B is 2nd to the right of H. E is 3rd to the right of C.
Who is 2nd to the right of A?

ہدایات: دیے گئے سوالات کے جواب دینے کے لیے مندرجہ ذیل معلومات کا مطالعہ کریں۔
8 دوست G، F، E، D، C، B، A اور H ایک دائرے میں مرکز کا رخ کیے ہوئے بیٹھے ہیں۔ HE، DG، AC اور FB ایک دوسرے سے ملے ہوئے بیٹھے ہیں۔A ، H کے بغل میں بھی بیٹھا ہے۔B کے دائیں سے دوسرا ہے۔ H ، E کے دائیں سے تیسرا ہے۔ C
A کے دائیں سے دوسرا کون ہے؟

For More Info And Videos About TAIT-Exam Syllabus And Other Exam Visit My Channel
TAIT च्या 30 प्रश्नपत्रिका PDF
BADSHAHimp Available Request 9765226781
WWW.YouTube.com/BADSHAHimp
Subscribe My Channel

A.B
A.B
A.B

B.E
B.E
B.E

C.F
C.F
C.F

D.निर्धारित केले जाऊ शकत नाही.
D.Cannot be determined
D.تعین نہیں کیا جا سکتا ہے

Answer: B.E
B.E
B.E

196 DIRECTIONS: A sentence with an underlined phrasal verb is given below. Out of the four options, choose the one which can be substituted for the given phrasal Verb.
Inspite of getting shot by The Taliban Malala Yousafzai stood for women education and bore away the Noble prize.

A.lost

B.refused

C.won

D.returned

Answer: C.won

197 'गारठा' या शब्दाचा समानार्थी शब्द कोणता ?

A.गर्मी

B.उष्मा

C.थंडी

D.उकाडा

Answer: C.थंडी

For More Info And Videos About TAIT-Exam Syllabus And Other Exam Visit My Channel
TAIT च्या 30 प्रश्नपत्रिका PDF
BADSHAHimp Available Request 9765226781
WWW.YouTube.com/BADSHAHimp
Subscribe My Channel

198	198 × 747 = ? 198 × 747 = ? ?= 747×198	
	A.147456 A.147456 A.147456	
	B.147900 B.147900 B.147900	
	C.147906 C.147906 C.147906	
	D.147525 D.147525 D.147525	
Answer:	C.147906 C.147906 C.147906	

199	DIRECTIONS: A sentence with an underlined word is given below. Find the word which is opposite in meaning to the underlined word from the given options. Attempts to get supplies to the region are <u>futile</u> because troops will not allow the aid convoy to enter the city.	
	A.Fruitful	
	B.Fruitless	
	C.Useless	
	D.Vain	
Answer:	A.Fruitful	

For More Info And Videos About TAIT-Exam Syllabus And Other Exam Visit My Channel
TAIT च्या 30 प्रश्नपत्रिका PDF
BADSHAHimp Available Request 9765226781
WWW.YouTube.com/BADSHAHimp
Subscribe My Channel

200 संवादाच्या प्रक्रियेत प्रतिसादाचे अंतिम उद्दिष्ट आहे

In a process of communication, the final objective of Feed-back is—

مواصلات کے ایک عمل میں، فیڈبیک کا حتمی مقصد ہے—

A.संवादाच्या प्रक्रियेत अपेक्षित बदल आणणे
A.To bring desirable change in the process of communication
A. مواصلات کے عمل میں مطلوبہ تبدیلی لانا

B.विषया बद्दल समजून घेणे
B.To understand about the content
B. مواد کے بارے میں سمجھنا

C.संचारकाचे दोष ओळखणे
C.To identify the defects of the communicator
C. مواصلات کی خرابیوں کو شناخت کرنا

D.मेसेज प्रेषकच्या कमीपणाचं निदान करणे
D.To diagnose the limits of the message sender
D. پیغام ارسال کنندہ کی حدود شناخت کرنا

Answer: A.संवादाच्या प्रक्रियेत अपेक्षित बदल आणणे
A.To bring desirable change in the process of communication
A. مواصلات کے عمل میں مطلوبہ تبدیلی لانا

For More Info And Videos About TAIT-Exam Syllabus And Other Exam Visit My Channel
TAIT च्या 30 प्रश्नपत्रिका PDF
BADSHAHimp Available Request 9765226781
YouTube WWW.YouTube.com/BADSHAHimp
Subscribe My Channel

Question Paper Title : TAIT_PAPER_28

Date of Exam : 2017-12-18 09:00:00

1	‘ नाक मुरडणे ‘ या वाक्प्रचाराचा अर्थ काय ?
	A.नापसंती दाखविणे
	B.नक्षा उतरणे
	C.बढाया मारणे
	D.एखादे काम करताना अतिशय श्रम, दु:ख होणे
Answer:	A.नापसंती दाखविणे

2	Out of the given options, choose the one which is the correct indirect speech of the sentence given below. Rahul said to me, “Have you ever been to Mexico”?
	A.Rahul asks me if I have ever been to Mexico.
	B.Rahul asked me if I have been to Mexico.
	C.Rahul asked me if I had ever been to Mexico.
	D.Rahul asks me if I had been to Mexico.
Answer:	C.Rahul asked me if I had ever been to Mexico.

For More Info And Videos About TAIT-Exam Syllabus And Other Exam Visit My Channel
TAIT च्या 30 प्रश्नपत्रिका PDF
BADSHAHimp Available Request 9765226781
YouTube WWW.YouTube.com/BADSHAHimp
Subscribe My Channel

3 सूचना : खालील प्रत्येक प्रश्नात दोन विधाने I आणि II दिलेले आहेत. हे विधान एकतर स्वतंत्र कारण असू शकतात किंवा स्वतंत्र कारणांचे परिणाम असू शकतात. यांपैकी एक विधान इतर विधानाचा परिणाम असू शकतो. दोन्ही विधाने वाचा आणि खालीलपैकी कोणत्या उत्तराचा पर्याय या दोन्ही विधानांमधील संबंधांचे वर्णन करतो ते ठरवा.

विधान :
I. उदारीकरण धोरणाने आपल्या देशात अनेक बहुराष्ट्रीय कंपन्यांना आकर्षित केले आहे.
II. बहुराष्ट्रीय कंपन्यांकडून भारतीय उत्पादकांशी तीव्र स्पर्धा आहे.

DIRECTIONS: Below in each question are given two statements I and II. These statements may be either independent causes or may be effects of independent causes. One of these statements may be the effect of the other statement. Read both the statements and decide which of the following answer choice correctly depicts the relationship between these two statements.

Statements:
I. Liberalisation policy has attracted many MNCs to our country.
II. Indian manufactures face intense competition from MNCs.

ہدایات: نیچے ہر سوال میں دو بیانات I اور II آزاد وجوہات یا پھر آزاد وجوہات کے اثرات ہو سکتے ہیں۔ انہیں گئے ہیں۔ یہ بیانات یا تو
بیانات میں سے ایک بیان دوسرے کا اثر ہو سکتا ہے۔دونوں بیانات پڑھیں اور فیصلہ کریں کہ نیچے دیے گئے کس جواب کا انتخاب ان
دونوں بیانات کے در میان تعلق کو ٹھیک سے ظاہر کرتا ہے۔

بیانات:
I – لبرلائزیشن پالیسی نے کئی MNCs کو ہمارے ملک کی طرف متوجہ کیا ہے۔
II -MNCs کی طرف سےانڈیین مینوفیکچرز فیس انٹنس کمپی ٹیشن

A.विधान I कारण आहे आणि विधान II त्याचा परिणाम आहे;
A.Statement I is the cause and statement II is its effect;
A.بیان نمبر I وجہ ہے اور بیان نمبر II اس کا اثر ہے۔

B.विधान II कारण आहे आणि विधान I त्याचा परिणाम आहे;
B.Statement II is the cause and statement I is its effect;
B.بیان نمبر II وجہ ہے اور بیان نمبر I اس کا اثر ہے۔

C.विधान I आणि II दोन्ही स्वतंत्र कारणे आहेत;
C.Both the statements I and II are independent causes
C.دونوں بیانات نمبر I اور نمبر II آزاد وجوہات ہیں۔

D.विधान I आणि II दोन्ही काही सामान्य कारणांचे परिणाम आहेत;
D.Both the statements I and II are effects of independent causes;
D. دونوں بیانات نمبر I اور نمبر II آزاد وجوہات کے اثرات ہیں۔

Answer: A.विधान I कारण आहे आणि विधान II त्याचा परिणाम आहे;
A.Statement I is the cause and statement II is its effect;
A.بیان نمبر I وجہ ہے اور بیان نمبر II اس کا اثر ہے۔

For More Info And Videos About TAIT-Exam Syllabus And Other Exam Visit My Channel
TAIT च्या 30 प्रश्नपत्रिका PDF
BADSHAHimp Available Request 9765226781
YouTube WWW.YouTube.com/BADSHAHimp
Subscribe My Channel

4

सूचना: खालील प्रश्नात उत्तरातील पर्यायांपैकी कोणत्या पर्यायी आकृतीत प्रश्नातील आकृती अंतर्भूत आहे?

DIRECTIONS: In the given question find the answer figure in which question figure is embedded.

ہدایات: دئے گئے سوال میں سے اس جواب والی تصویر کو تلاش کریں جس میں سوال کی تصویر منسلک ہے۔

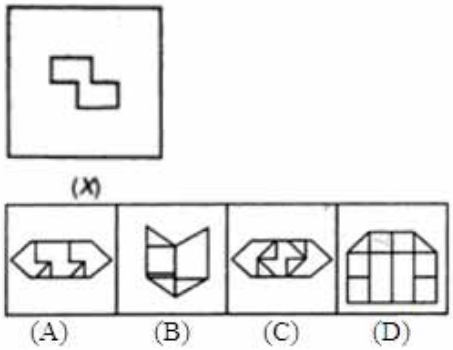

A. (A)

B. (B)

C. (C)

D. (D)

Answer: A. (A)

5 पुढील जोडशब्द पूर्ण करा . ‘ गाडी ----------’

A.सवार

B.मालक

C.घोडा

D.गुली

Answer: C.घोडा

6 पुढील म्हण पूर्ण करा - ‘ ---------- उलट्या बोंबा ‘

A.बायकोच्या

B.सासूच्या

C.चोराच्या

For More Info And Videos About TAIT-Exam Syllabus And Other Exam Visit My Channel
BADSHAHimp TAIT च्या 30 प्रश्नपत्रिका PDF Available Request 9765226781 WWW.YouTube.com/BADSHAHimp Subscribe My Channel

	D.नोकराच्या
Answer:	C.चोराच्या
7	(25 x 6000) ÷ 150 x 45 = ? (25 x 6000) ÷ 150 x 45 = ? (25 x 6000) ÷ 150 x 45 = ?
	A.4500 A.4500 A.4500
	B.50000 B.50000 B.50000
	C.5000 C.5000 C.5000
	D.45000 D.45000 D.45000
Answer:	D.45000 D.45000 D.45000
8	‘ आता मला सातवे वर्ष लागले.’ या वाक्यातील विशेषण ओळखा.
	A.आता
	B.मला
	C.सातवे
	D.वर्ष
Answer:	C.सातवे

For More Info And Videos About TAIT-Exam Syllabus And Other Exam Visit My Channel
TAIT च्या 30 प्रश्नपत्रिका PDF
BADSHAHimp Available Request 9765226781
WWW.YouTube.com/BADSHAHimp
Subscribe My Channel

9	जर $4^{\sqrt{x}^{\sqrt{x}}} = 256$ तर x ची किंमत काढा. Solve for x if $4^{\sqrt{x}^{\sqrt{x}}} = 256$ اگر $4^{\sqrt{x}^{\sqrt{x}}} = 256$ تو x کی قیمت کے لئے حل کریں۔
	A. 2
	B. 16
	C. 4
	D. 3
Answer:	C. 4
10	एका संख्येचे 25% हे 850 असल्यास ती संख्या काढा. If 25% of a number is 850, then find the number? کسی نمبر کا 25% ، 850 ہے ؛ تو نمبر ہوگا۔
	A.3400 A.3400 A.3400
	B.3500 B.3500 B.3500
	C.3600 C.3600 C.3600
	D.3700 D.3700 D.3700
Answer:	A.3400 A.3400 A.3400

For More Info And Videos About TAIT-Exam Syllabus And Other Exam Visit My Channel
TAIT च्या 30 प्रश्नपत्रिका PDF
BADSHAHimp Available Request 9765226781
WWW.YouTube.com/BADSHAHimp
Subscribe My Channel

11 सूचना: खालील प्रश्नांमध्ये दिलेल्या पर्यायांमधून संबंधित अक्षर/शब्द/संख्या निवडा.

HKNQ : 4 :: SVYBY : ?

DIRECTIONS: In the following question, select the related letter/word/number from the given alternatives.

HKNQ : 4 :: SVYBY : ?

سمت: مندرجہ ذیل سوال میں، دیے گئے متبادل سے متعلقہ حرف/لفظ/نمبر منتخب کریں۔

HKNQ : 4 :: SVYBY : ?

A.6
A.6
A.6

B.5
B.5
B.5

C.3
C.3
C.3

D.2
D.2
D.2

Answer: B.5
B.5
B.5

12 ज्या मार्गाने संदेश जातो त्याला म्हणतात-

The way through which message passes, is called—

جس راستے سے پیغام گزرتا ہے، اسے کہا جاتا ہے—

A.चॅनेल
A.Channel
A. چینل

B.ट्रान्समिशन माध्यम
B.Transmission medium
B. ترسیلی وسیلہ

For More Info And Videos About TAIT-Exam Syllabus And Other Exam Visit My Channel
BADSHAHimp TAIT च्या 30 प्रश्नपत्रिका PDF Available Request 9765226781 YouTube WWW.YouTube.com/BADSHAHimp Subscribe My Channel

C.ट्रान्समिशन चॅनेल
C.Transmission channel
C. ترسیلی چینل

D.ट्रान्समिशन सिस्टम
D.Transmission system
D. ترسیلی نظام

Answer:
A.चॅनेल
A.Channel
A. چینل

13
दिलेल्या पर्यायांमधून वेगळे ते निवडा.

Choose the odd one out from the given alternatives.

دیے گئے متبادل میں سے بے جوڑ کو چنیں۔

A.त्रिकोण
A.Triangle
A.مثلث

B.वर्तुळ
B.Circle
B.دائرہ

C.चौरस
C.Square
C.مربع

D.गोल
D.Sphere
D.دائرہ

Answer:
A.त्रिकोण
A.Triangle
A.مثلث

14
‘कार्बन डेटिंग पद्धत’ यासाठी वापरली जाते

‘Carbon Dating Method’ is used to

'کاربن ڈیٹنگ کا طریقہ' استعمال کیا جاتا ہے

For More Info And Videos About TAIT-Exam Syllabus And Other Exam Visit My Channel
TAIT च्या 30 प्रश्नपत्रिका PDF
BADSHAHimp Available Request 9765226781
WWW.YouTube.com/BADSHAHimp
Subscribe My Channel

A.जागा शोधण्यासाठी
A.Locate place
A.کسی جگہ کو تلاش کرنے کے لئے

B.सामग्रीचे वय ओळखण्यासाठी
B.Identify the age of material
B.کسی چیز کی عمر کو معلوم کرنے میں

C.स्क्रिप्ट ओळखण्यासाठी
C.Identify the script
C.رسم الخط کی شناخت میں

D.सामग्री ओळखण्यासाठी
D.Identify the material
D.مواد کی نشاندہی کرنے میں

Answer:

B.सामग्रीचे वय ओळखण्यासाठी
B.Identify the age of material
B.کسی چیز کی عمر کو معلوم کرنے میں

15 एखादा विद्यार्थी गरीब कुटंबातून आहे. म्हणून तो विद्यार्थी खाजगी शिकवणीच्या ट्युशनची फिस भरू शकत नाही पण तो आपल्या अभ्यासात येणाऱ्या अडचणी दूर करण्यास उत्सुक आहे. आपण त्या विद्यार्थ्यासाठी काय तरतूद करणार?

A student belongs to a very poor family. The student therefore is unable to pay tuition fee for private coaching but he is eager to get some of his problems solved. What provision will you make for the student?

ایک طالب علم بہت غریب خاندان سے تعلق رکھتا ہے۔ اس وجہ سے طالب علم نجی کوچنگ کے لئے ٹیوشن فیس ادا کرنے سے قاصر ہے لیکن وہ اپنی مشکلات کو حل کرنے کے خواہاں ہیں۔ طالب علم کے لئے آپ کی فراہمی کیا ہوگی؟

A.त्याला अतिरिक्त वेळ देऊ
A.Give extra time to him
A.اسے زیادہ وقت دیں

B.आपल्याजवळ मोकळी वेळ नसल्यामुळे आपण त्याची मदत करण्यास टाळणार
B.Refuse to solve his problems as you have no spare time
B.اس کے مسائل کو حل کرنے سے انکار کرتے ہیں کیونکہ آپ کے پاس الگ وقت نہیں ہے

C.त्याच्यात भीती निर्माण करू
C.Creating a terror in him
C.اس میں دہشت کی تشکیل

D.त्याच्या विनंतीकडे लक्ष देणार नाही.
D.Not giving the ears to his request.
D.اس کی درخواست پر کان نہ دھرے.

For More Info And Videos About TAIT-Exam Syllabus And Other Exam Visit My Channel
TAIT च्या 30 प्रश्नपत्रिका PDF
BADSHAHimp Available Request 9765226781
WWW.YouTube.com/BADSHAHimp
Subscribe My Channel

Answer: A.त्याला अतिरिक्त वेळ देऊ
A.Give extra time to him
A.اسے زیادہ وقت دیں

16 दिलेल्या शब्दामधून खालीलपैकी कोणता शब्द तयार केला जाऊ शकतो?
OPERATION

Which of the following word can be formed from the given word?
OPERATION

دیےگیے لفظ سے مندرجہ ذیل الفاظ میں سے کونسا بنایا جاسکتا ہے؟
'OPERATION'

A.CAPTION
A.CAPTION
A.CAPTION

B.OPTIONAL
B.OPTIONAL
B.OPTIONAL

C.OPTION
C.OPTION
C.OPTION

D.NATION
D.NATION
D.NATION

Answer: C.OPTION
C.OPTION
C.OPTION

17 खालीलपैकी कोण भारताचे राष्ट्रपती नव्हते?

Who out of the following was not a President of India?

ان میں سے کون بھارت کا صدر نہیں ہے۔

A.झैल सिंह
A.Zail Singh
A.ذیل سنگھ

For More Info And Videos About TAIT-Exam Syllabus And Other Exam Visit My Channel
TAIT च्या 30 प्रश्नपत्रिका PDF
BADSHAHimp Available Request 9765226781
WWW.YouTube.com/BADSHAHimp
Subscribe My Channel

B.व्ही.व्ही. गिरी
B.V.V. Giri
B.وی وی گری

C.एस.डी. शर्मा
C.S.D. Sharma
C.ایس ڈی شرما

D.मोरारजी देसाई
D.Morarji Desai
D.مورارجی دیسائی

Answer: D.मोरारजी देसाई
D.Morarji Desai
D.مورارجی دیسائی

18 DIRECTIONS: A sentence with an underlined word is given below. Find the word which is opposite in meaning to the underlined word from the given options.
We managed to get a consensus about not smoking in the office.

A.Disagreement

B.Agreement

C.Accord

D.Harmony

Answer: A.Disagreement

19 भारतात आपल्याकडे हे आहे:

In India we are having:

بھارت میں نافذ ہے:

A.दुहेरी नागरिकत्व
A.Double Citizenship
A. دوہری شہریت

B.एकेरी नागरिकत्व.
B.Single Citizenship.
B. اکہری شہریت.

For More Info And Videos About TAIT-Exam Syllabus And Other Exam Visit My Channel
TAIT च्या 30 प्रश्नपत्रिका PDF Available Request 9765226781
WWW.YouTube.com/BADSHAHimp Subscribe My Channel
BADSHAHimp

C.बहू नागरिकत्व
C.Multiple Citizenship
C. ایک سے زیادہ شہریت

D.एकही नाही
D.None
D. کوئی بھی نہیں

Answer: B.एकेरी नागरिकत्व.
B.Single Citizenship.
B. اکہری شہریت.

20 सूचना: खालील प्रश्नांमध्ये दिलेल्या पर्यायांमधून संबंधित अक्षर/शब्द/संख्या निवडा.

6 : 42 : ?

DIRECTIONS: In the following question, select the related letter/word/number from the given alternatives.

6 : 42 : ?

سمت: مندرجہ ذیل سوال میں، دیے گئے متبادل سے متعلقہ حرف/لفظ/نمبر منتخب کریں۔

6 : 42 : ?

A.4 : 15
A.4 : 15
A.4 : 15

B.5 : 23
B.5 : 23
B.5 : 23

C.9 : 82
C.9 : 82
C.9 : 82

D.17 : 23
D.17 : 23
D.17 : 23

Answer: A.4 : 15
A.4 : 15
A.4 : 15

21

निर्देश: खालील प्रश्नांमध्ये प्रश्न चिन्हाच्या (?) जागी कोणते अंदाजे मूल्य यायला हवे? (तुम्ही अचूक मूल्य काढण्याचे अपेक्षित नाही).

DIRECTIONS: What approximate value should come in place of the question mark (?) in the following questions? (You are not expected to calculate the exact value)

ہدایات: مندرجہ ذیل سوال میں سوال کا نشان (؟) کی جگہ پر کون سا تخمینہ ویلیو آئے گا –
(آپ کو صحیح ویلیو نکالنے کی ضرورت نہیں ہے)

$5986 \div 3 \times \sqrt{220} = ?$

A. 29800

B. 29930

C. 28746

D. 20000

Answer: B. 29930

22

सूचना : खालील प्रत्येक प्रश्नात दोन विधाने I आणि II दिलेले आहेत. हे विधान एकतर स्वतंत्र कारण असू शकतात किंवा स्वतंत्र कारणांचे परिणाम असू शकतात. यांपैकी एक विधान इतर विधानाचा परिणाम असू शकतो. दोन्ही विधाने वाचा आणि खालीलपैकी कोणत्या उत्तराचा पर्याय या दोन्ही विधानांमधील संबंधांचे वर्णन करतो ते ठरवा.

विधान :
I. कार्यालयात गैरवर्तनापासून महिलांचे संरक्षण करण्यासाठी सरकारने एक विशेष कायदा तयार केला आहे.
II. कार्यालयात महिलांवरील गैरवर्तनांच्या घटनांमध्ये वाढ होत आहेत.

DIRECTIONS: Below in each question are given two statements I and II. These statements may be either independent causes or may be effects of independent causes. One of these statements may be the effect of the other statement. Read both the statements and decide which of the following answer choice correctly depicts the relationship between these two statements.

Statements:
I. Government has enacted a special law for protecting women against abuses in office.
II. The cases of women abuses in offices have been increasing.

ہدایات: نیچے ہر سوال میں دو بیانات I اور II دیے گئے ہیں۔ یہ بیانات یا تو آزاد وجوہات کے اثرات ہو سکتے ہیں یا پھر آزاد وجوہات کے اثرات ہو سکتے ہیں۔ ان بیانات میں سے ایک بیان دوسرے کا اثر ہو سکتا ہے۔دونوں بیانات پڑھیں اور فیصلہ کریں کہ نیچے دیے گئے کس جواب کا انتخاب ان دونوں بیانات کے در میان تعلق کو ٹھیک سے ظاہر کرتا ہے۔

بیانات:
I – دفتروں میں خواتین کو بدسلوکی سے تحفظ فراہم کرنے کے لیے حکومت نے ایک خصوصی قانون نافذ کیا ہے۔
II ۔ دفتروں میں خواتین سے بدسلوکی کے واقعات میں اضافہ ہو رہا ہے۔

A.विधान I कारण आहे आणि विधान II त्याचा परिणाम आहे;
A.Statement I is the cause and statement II is its effect;
A.اس کا اثر ہے۔ II وجہ ہے اور بیان نمبر I بیان نمبر

B.विधान II कारण आहे आणि विधान I त्याचा परिणाम आहे;
B.Statement II is the cause and statement I is its effect;
B.اس کا اثر ہے۔ I وجہ ہے اور بیان نمبر II بیان نمبر

C.विधान I आणि II दोन्ही स्वतंत्र कारणे आहेत;
C.Both the statements I and II are independent causes;
C.آزاد وجوہات ہیں۔ II اور نمبر I دونوں بیانات نمبر

D.विधान I आणि II दोन्ही स्वतंत्र कारणांचे परिणाम आहेत;
D.Both the statements I and II are effects of independent causes;
D.آزاد وجوہات کے اثرات ہیں۔ II اور نمبر I دونوں بیانات نمبر

Answer: B.विधान II कारण आहे आणि विधान I त्याचा परिणाम आहे;
B.Statement II is the cause and statement I is its effect;
B.اس کا اثر ہے۔ I وجہ ہے اور بیان نمبر II بیان نمبر

23 विद्यार्थ्यांच्या वर्गात, राघवचे स्थान सुरुवातीपासून 8 व्या आणि शेवटून 28व्या क्रमांकावर आहे. तर वर्गात एकूण विद्यार्थी किती ?

In a class of students, Raghav's rank is 8th from beginning and 28th from last. How many students are there in the class?

بچھوں کی کلاس میں، راگھو کا درجہ شرو سے 8 وہ اور آخر سے 28 وہ ہے.کلاس میں کلکیٹٹے بچھے ہے؟

A.34
A.34
A.34

B.38
B.38
B.38

C.36
C.36
C.36

D.35
D.35
D.35

Answer: D.35
D.35
D.35

24

दिलेल्या पर्यायांपैकी कोणती आकृती मुख्य आकृतीचे अचूक प्रतिबिंब आहे?

Which of the answer figure is exactly the mirror image of the given figure?

جواب کی کون سی تصویر، دی گئی تصویر کی بالکل صحیح آئینہ دار تصویر لکتی ہے؟

मुख्य आकृती
Main Figure
خاص تصویر

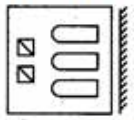

उत्तरासाठी पर्यायी आकृत्या
Answer Figure
جواب کی تصویر

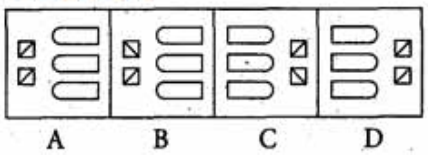

A. (A)

B. (B)

C. (C)

D. (D)

Answer: D. (D)

25 कंटेनरमधून 6 लिटर्स सोल्युशन "A" काढले गेल आणि त्याच्या जागी पाणी घातले गेले. पुन्हा 6 लिटर्स मिश्रण काढले आणि त्याच्या जागी पाणी घातले. या दोन कार्यांनंतर कंटेनरमध्ये सोल्युशन "A" आणि पाण्याचे प्रमाण 9:16 झाले. मिश्रणाचे प्रमाण किती आहे__

From a container, 6 liters Solution “A” was drawn out and was replaced by water. Again 6 liters of the mixture was drawn out and was replaced by the water. Thus the quantity of Solution “A” and water in the container after these two operations is 9:16. The quantity of the mixture is__

"A"ایک کنٹینر سے، 6 لیٹر محلول نکالا گیا اور اسے پانی سے تبدیل کردیا گیا. ایک بار پھر 6 لیٹر مرکب نکال دیا گیا اور اسے پانی "A" سے تبدیل کردیا گیا. اس طرح ان دو مرتبہ کے بعد کنٹینر میں محلول اور پانی کی مقدار 9:16 ہے. مرکب کی مقدار کیا ہے_____

A.13 लिटर्स
A.13 litres
A.13 لیٹر

B.12 लिटर्स
B.12 litres
B.12 لیٹر

C.15 लिटर्स
C.15 litres
C.15 لیٹر

D.14 लिटर्स
D.14 litres
D.14 لیٹر

Answer: C.15 लिटर्स
C.15 litres
C.15 لیٹر

26 कार्बनडाय ऑक्साईडचे जगातील सर्वोच्य दरडोई उत्सर्जन येथे आहे:

The highest per capita emitter of Carbon dioxide in the world is :

دنیا میں کاربن ڈائی آکسائیڈ کا سب سے زیادہ اخراج فی کس ہوتا ہے:

A.कतार
A.Qatar
A. قطر

B.युएसए
B.USA
B. امریکہ

C.भारत
C.India
C. بھارت

D.चिन
D.China
D. چین

Answer: A.कतार
A.Qatar
A. قطر

27 प्राप्त करण्याऱ्या स्नायुंचे अनुबंधानातून वक्षिकेला जाणारे संदेश:

Messages are carried across the synapse to the dendrite of a receives neuron

پیغامات سنبھالے میں نیوران وصول کرنے کے دائرے پر لے جاتے ہیں

A.चेतापारेषक
A.Neurotransmitter
A.نیوروٹ ٹرانسمیٹر

B.हार्मोन
B.Hormone
B.ہارمون

C.जीवनसत्त्व
C.Vitamins
C.وٹامنز

D.एंझाइम
D.Enzymes
D.انزائمز

Answer: A.चेतापारेषक
A.Neurotransmitter
A.نیوروٹ ٹرانسمیٹر

28 सूचना: खालील माहितीचा काळजीपूर्वक अभ्यास करा आणि दिलेल्या प्रश्नांची उत्तरे द्या.
सात मजली इमारतीमध्ये मजल्यांना एक ते सात असे आकडे दिलेले आहेत. P, Q, R, S, T आणि V पैकी प्रत्येक जण वेगवेगळ्या मजल्यावर राहतो. (तळ मजल्याला मजला क्र.१ नाव दिले आहे आणि त्याच्या वरच्या मजल्यांना मजला क्र.२ आणि पुढे नावे दिलेली आहेत. इमारतीचा एक मजला रिकामा आहे. P पाचव्या मजल्यावर राहतो. पाचव्या मजल्या खालचा कोणताही मजला रिकामा नाही, विषम संख्या असलेला कोणताही मजला रिकामा नाही. T आणि Vच्या मध्ये केवळ S राहतो. T विषम संख्या असलेल्या मजल्यावर राहत नाही. T R राहत असलेल्या मजल्याच्या लगेच वर किंवा लगेच खालच्या मजल्यावर राहत नाही. Q तळमजल्यावर राहत नाही.
तळमजल्यावर कोण राहतो?

DIRECTIONS: Study the following information carefully and answer the given questions.
In a seven storey building, having floors numbered one to seven. P, Q, R, S, T and V each live on a different floor. (The ground floor is numbered floor no. 1, the floor above it floor no. 2 and so on. One of the floors in the building is vacant. P lives on the fifth floor. No floor below fifth floor is vacant; also no odd numbered floor is vacant. Only S lives between T and V. T does not live on an odd numbered floor. T does not live on a floor immediately above or immediately below R's floor. Q does not live on the bottom most floor.
Who lives on the bottom most floor?

ہدایات: مندرجہ ذیل معلومات کو دھیان سے پڑھیں اور دیے گئے سوالوں کے جواب دیں۔
P، Q، R، S، T، U اور V ایک سات منزلہ عمارت میں، جس میں فلور کے نمبر ایک سے سات ہیں میں سے ہر ایک مختلف فلور پر پانچویں P رہتا ہے۔ (گراؤنڈ فلور کا نمبر 1 ہے، اس کے اوپر کا فلور نمبر 2 ہے اور اسی طرح آگے)۔ عمارت میں ایک فلور خالی ہے۔ کے درمیان V اور T فلور پر رہتا ہے۔ پانچویں فلور سے نیچے کوئی فلور خالی نہیں ہے؛ نیز کوئی بھی طاق عدد کا فلور خالی نہیں ہے۔ سب Q کے اوپری یا نچلے فلور پر نہیں رہتا ہے۔ R فوری طور پر T ایک طاق عدد کے فلور پر نہیں رہتا ہے۔ T رہتا ہے۔ S صرف سے نچلے فلور پر نہیں رہتا ہے۔
سب سے نچلے فلور پر کون رہتا ہے؟

A.Q
A.Q
A.Q

B.V
B.V
B.V

C.R
C.R
C.R

D.T
D.T
D.T

Answer: C.R
C.R
C.R

29 उच्च शिक्षणाकरिता संस्था निवडताना सर्वात महत्वाच्या प्रश्नाचे उत्तर शोधावे लागेल ते आहे-

The most important questions to be answered in selecting an institution of higher learning is—

اعلی سیکھنے کےلئے ادارے کو منتخب کرنے میں سب سے اہم سوال جس کا جواب دیا جائے،یہ ہے-

A.काय ती संस्था योग्यरित्या मान्यताप्राप्त आहे?
A.Is the institution properly accredited?
A.کیا ادارہ مناسب طریقے سے منظوری شدہ ہے؟

B.काय संस्थेच्या शिक्षकांनी त्यांच्या विषयांत अधिकाधिक पदवी धारण केली आहे?
B.Do the instructors of the institution hold advanced degrees in their subjects?
B.کیا ادارے کے اساتذہ اپنے مضامین میں اعلی درجے کی ڈگری رکھتے ہیں؟

C.अर्जदारांच्या गरजा भागविण्यासाठी हे संस्थान पात्र आहे का?
C.Does the institution suit to the needs of the applicant?
C.کیا ادارہ درخواست دہندگان کی ضروریات کو پورا کرتا ہے؟

D.वरीलपैकी सर्व
D.All of the above
D.مذکورہ تمام

Answer: D.वरीलपैकी सर्व
D.All of the above
D.مذکورہ تمام

30 दिलेल्या बिंदूमधून किती रेषा जातील?

How many lines can pass through a given point?

کتنے لائنوں کو کسی نقطہ سے گزارا جا سکتا ہے؟

A.फक्त एक
A.Only one
A.صرف ایک

B.दोन
B.Two
B.دو

C.तीन
C.Three
C.تین

D.अमर्याद
D.Unlimited
D.لا محدود

Answer:	D.अमर्याद D.Unlimited D.لا محدود

31	खालील समीकरणाचे मूल्य काढा: 892 – 1684 + 643 + 893 –218 = ? Find the value of following expression: 892 – 1684 + 643 + 893 –218 = ? درج ذیل مساوات کی قیمت معلوم کریں : 892 – 1684 + 643 + 893 –218= ?
	A.526 A.526 A.526
	B.458 B.458 B.458
	C.622 C.622 C.622
	D.746 D.746 D.746
Answer:	A.526 A.526 A.526

32	खालीलपैकी तरंगचे कोणते प्रकार इतरांपेक्षा वेगळे आहेत? Which of the following type of waves is different from others? مندرجہ ذیل میں سے کس قسم کی لہریں دوسروں سے مختلف ہوتی ہیں؟

A.प्रकाशाचे तरंग
A.Light waves
A.روشنی کی لہریں

B.एक्स-रेज
B.X—rays
B.ایکس-شعاعیں

C.रेडिओ तरंग
C.Radio waves
C.ریڈیو کی لہریں

D.ध्वनी तरंग
D.Sound waves
D.آواز کی لہریں

Answer: D.ध्वनी तरंग
D.Sound waves
D.آواز کی لہریں

33 निर्देश: खालीलपैकी प्रत्येक प्रश्नात, मालिकेमधील एक संख्या चुकीची आहे. चुकीची संख्या शोधा.

572, 284, 140, 72, 32, 14, 5

DIRECTION: In each of the following questions, one number is wrong in the series. Find out the wrong number.

572, 284, 140, 72, 32, 14, 5

ہدایت ہر سوال میں یک نمبر غلط ہے . اس غلط نمبر کو کھوجے .

572, 284, 140, 72, 32, 14, 5

A.14
A.14
A.14

B.32
B.32
B.32

C.72
C.72
C.72

D.5
D.5
D.5

Answer: C.72
C.72
C.72

34 ‘ टवाळखोर ‘ या शब्दाचा विरुद्धार्थी शब्द कोणता ?

A.उनाड

B.खोडकर

C.सभ्य

D.टाळ्या वाजवणारा

Answer: C.सभ्य

35 खालील शब्दांची चढत्या क्रमाने मांडणी करून खाली दिलेल्या प्रतिसादांमधून कोणता अर्थपूर्ण क्रम असेल?

1. सुवर्ण
2. लोखंड
3. चांदी
4. प्लॅटिनम
5. तांबे

Which one of the given responses would be a meaningful order of the following words?

1. Gold
2. Iron
3. Silver
4. Platinum
5. Copper

چڑھتی ہوئی ترتیب میں دیےگیے جوابات میں سے کونسا ایک مندرجہ ذیل الفاظ کی معنی خیز ترتیب ہوگی؟
1. سونے
2. لوہے
3. چاندی
4. پلاٹینم
5. تانبے

A.2, 4, 3, 5, 1
A.2, 4, 3, 5, 1
A.2, 4, 3, 5, 1

B.4, 1, 3, 5, 2
B.4, 1, 3, 5, 2
B.4, 1, 3, 5, 2

C.4, 5, 1, 3, 2
C.4, 5, 1, 3, 2
C.4, 5, 1, 3, 2

D.5, 4, 3, 2, 1
D.5, 4, 3, 2, 1
D.5, 4, 3, 2, 1

Answer: B.4, 1, 3, 5, 2
B.4, 1, 3, 5, 2
B.4, 1, 3, 5, 2

36 सूचना: खालील माहितीचा काळजीपूर्वक अभ्यास करा आणि दिलेल्या प्रश्नांची उत्तरे द्या.
सात मजली इमारतीमध्ये मजल्यांना एक ते सात असे आकडे दिलेले आहेत. P, Q, R, S, T आणि V पैकी प्रत्येक जण वेगवेगळ्या मजल्यावर राहतो. (तळ मजल्याला मजला क्र.१ नाव दिले आहे आणि त्याच्या वरच्या मजल्यांना मजला क्र.२ आणि पुढे नावे दिलेली आहेत. इमारतीचा एक मजला रिकामा आहे. P पाचव्या मजल्यावर राहतो. पाचव्या मजल्या खालचा कोणताही मजला रिकामा नाही, विषम संख्या असलेला कोणताही मजला रिकामा नाही. T आणि Vच्या मध्ये केवळ S राहतो. T विषम संख्या असलेल्या मजल्यावर राहत नाही. T R राहत असलेल्या मजल्याच्या लगेच वर किंवा लगेच खालच्या मजल्यावर राहत नाही. Q तळमजल्यावर राहत नाही.
Q आणि Sमध्ये किती मजले आहेत?

DIRECTIONS: Study the following information carefully and answer the given questions.
In a seven storey building, having floors numbered one to seven. P, Q, R, S, T and V each live on a different floor. (The ground floor is numbered floor no. 1, the floor above it floor no. 2 and so on. One of the floors in the building is vacant. P lives on the fifth floor. No floor below fifth floor is vacant; also no odd numbered floor is vacant. Only S lives between T and V. T does not live on an odd numbered floor. T does not live on a floor immediately above or immediately below R's floor. Q does not live on the bottom most floor.
How many floors are there between Q and S?

ہدایات: مندرجہ ذیل معلومات کو دھیان سے پڑھیں اور دیے گئے سوالوں کے جواب دیں۔
P، Q، R، S، T، U اور V ایک سات منزلہ عمارت میں، جس میں فلور کے نمبر ایک سے سات ہیں میں سے ہر ایک مختلف فلور پر پانچویں P رہتا ہے۔ (گراؤنڈ فلور کا نمبر 1 ہے، اس کے اوپر کا فلور نمبر 2 ہے اور اسی طرح آگے)۔ عمارت میں ایک فلور خالی ہے۔ کے درمیان V اور T فلور پر رہتا ہے۔ پانچویں فلور سے نیچے کوئی فلور خالی نہیں ہے؛ نیز کوئی بھی طاق عدد کا فلور خالی نہیں ہے۔ سب Q کے اوپری یا نچلے فلور پر نہیں رہتا ہے۔ R فوری طور پر T ایک طاق عدد کے فلور پر نہیں رہتا ہے۔ T رہتا ہے۔ S صرف سے نچلے فلور پر نہیں رہتا ہے۔
Q اور S کے درمیان کتنے فلور ہیں؟

A.तीन
A.Three
A.تین

B.दोन
B.Two
B.دو

C.चार
C.Four
C.چار

D.एक
D.One
D.ایک

Answer: A.तीन
A.Three
A.تین

37 **सूचना**: दिलेल्या पर्यायांमधून श्रेणी पूर्ण करणारी योग्य आकृती निवडा.

DIRECTIONS: Complete the series by choosing right figure from the given choices.

ہدایات: دئے گئے انتخابات میں سے صحیح تصویر کو منتخب کرکے سلسلہ مکمل کریں۔

Problem Figures

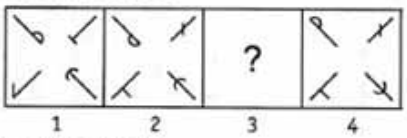

Answer Figures

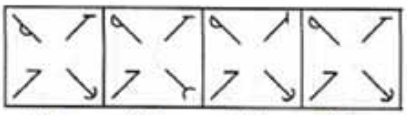

A. (A)

B. (B)

C. (C)

D. (D)

Answer: D. (D)

38	च्यासाठी सूचना दिली जाऊ शकते- Instruction can be imparted to— ہدایات کی توثیق کی جا سکتی ہے-
	A.वर्गात A.Within the classroom A.کلاس روم کے اندر
	B.विधानसभेच्या मैदानावर B.On the Assembly ground B.اسمبلی کے میدان میں
	C.खेळाच्या मैदानात C.At sports-grounds C.کھیل کے میدانوں میں
	D.वरीलपैकी सर्व D.All of the above D.مذکورہ تمام
Answer:	D.वरीलपैकी सर्व D.All of the above D.مذکورہ تمام
39	सूचनाः दिलेल्या पर्यायांमधून ऍनालॉगस शब्द निवडा. स्टुअर्ट लिटिलचा संबंध ई. बी. व्हाईट यांच्याशी आहे जसा पूहचा संबंध ...सोबत आहेः DIRECTIONS: Choose the analogous word from the given alternatives. Stuart Little is to E.B. White as Winnie the Pooh is to: ہدایات: دیے گئے متبادل سے مطابق لفظ کا انتخاب کریں سٹوارٹ لٹل کا ویسا ہی تعلق ہے ای.بی.وائٹ کے ساتھ جیسا کہ ونی دا پووہ کا ---------- کے ساتھ .
	A.ए. ए. मिल्ने A.A. A. Milne A. اے.اے.ملن
	B.सी. एस. लुईस B.C. S. Lewis B. سی.ایس.لیوس

C.जे. आर. आर. टोल्केन
C.J. R. R. Tolkein
C. جے.آر.آر.تولکین

D.आर. सटक्लिफ
D.R. Sutcliff
D. آر.سٹکلف

Answer: A.ए. ए. मिल्ने
A.A. A. Milne
A. اے.اے.ملن

40 सूचना: खालील माहितीचा काळजीपूर्वक अभ्यास करा आणि दिलेल्या प्रश्नांची उत्तरे द्या.
सात मजली इमारतीमध्ये मजल्यांना एक ते सात असे आकडे दिलेले आहेत. P, Q, R, S, T आणि V पैकी प्रत्येक जण वेगवेगळ्या मजल्यावर राहतो. (तळ मजल्याला मजला क्र.१ नाव दिले आहे आणि त्याच्या वरच्या मजल्यांना मजला क्र.२ आणि पुढे नावे दिलेली आहेत. इमारतीचा एक मजला रिकामा आहे. P पाचव्या मजल्यावर राहतो. पाचव्या मजल्या खालचा कोणताही मजला रिकामा नाही, विषम संख्या असलेला कोणताही मजला रिकामा नाही. T आणि Vच्या मध्ये केवळ S राहतो. T विषम संख्या असलेल्या मजल्यावर राहत नाही. T R राहत असलेल्या मजल्याच्या लगेच वर किंवा लगेच खालच्या मजल्यावर राहत नाही. Q तळमजल्यावर राहत नाही.
R कोणत्या मजल्यावर राहतो?

DIRECTIONS: Study the following information carefully and answer the given questions.
In a seven storey building, having floors numbered one to seven. P, Q, R, S, T and V each live on a different floor. (The ground floor is numbered floor no. 1, the floor above it floor no. 2 and so on. One of the floors in the building is vacant. P lives on the fifth floor. No floor below fifth floor is vacant; also no odd numbered floor is vacant. Only S lives between T and V. T does not live on an odd numbered floor. T does not live on a floor immediately above or immediately below R's floor. Q does not live on the bottom most floor.
On which of the following floors does R live?

ہدایات: مندرجہ ذیل معلومات کو دھیان سے پڑھیں اور دیے گئے سوالوں کے جواب دیں۔
P، Q، R، S، T، U اور V میں سے ہر ایک مختلف فلور پر ایک سات منزلہ عمارت میں، جس میں فلور کے نمبر ایک سے سات ہیں پانچویں P رہتا ہے۔ (گراؤنڈ فلور کا نمبر 1 ہے، اس کے اوپر کا فلور نمبر 2 ہے اور اسی طرح آگے)۔ عمارت میں ایک فلور خالی ہے۔ کے درمیان V اور T فلور پر رہتا ہے۔ پانچویں فلور سے نیچے کوئی فلور خالی نہیں ہے؛ نیز کوئی بھی طاق عدد کا فلور خالی نہیں ہے۔ سب Q کے اوپری یا نچلے فلور پر نہیں رہتا ہے۔ R فوری طور پر T ایک طاق عدد کے فلور پر نہیں رہتا ہے۔ T رہتا ہے۔ S صرف سے نچلے فلور پر نہیں رہتا ہے۔
رہتا ہے؟ R مندرجہ ذیل کس فلور پر

A.सातव्या
A.Seventh
A.ساتویں

B.सहाव्या
B.Sixth
B.چھٹے

C.तिसऱ्या
C.Third
C.تیسرے

D.पहिला
D.First
D.پہلے

Answer: D.पहिला
D.First
D.پہلے

41 Choose the word which is most similar in meaning to the given word.
APPETITE

A.Hunger

B.Satisfaction

C.Sufficiency

D.Fullness

Answer: A.Hunger

42 सोनुचा भाऊ मोनु हा त्याच्यापेक्षा 536 दिवस मोठा आहे तर त्याची बहीण टोनु ही मोनु पेक्शा 75 आठवडे मोठी आहे. जर टोनुचा जन्म बुधवारी झाला असेल तर सोनु कोणत्या वारी जन्मला?

Sonu’s brother Monu is 536 days older to him while his sister Tonu 75 weeks older to Monu. If Tonu was born on Wednesday, on which day was Sonu born?

سونو کا بھائی مونو اس سے 536 دن بڑا ہے جبکہ اس کی بہن ٹونو مونو سے 75 ہفتے بڑی ہے۔ اگر ٹونو بدھ کے دن پیدا ہوئی ہو تو سونو کس دن پیدا ہوا؟

A.शनिवार
A.Saturday
A.سنیچر

B.रविवार
B.Sunday
B.اتوار

C.शुक्रवार
C.Friday
C.جمعہ

D.सोमवार
D.Monday
D.پیر

Answer: B.रविवार
B.Sunday
B.اتوار

43 0.3 × 1.42 × 0.33 = ?

0.3 × 1.42 × 0.33 = ?

0.3 × 1.42 × 0.33 = ?

A.1.4057999999999999
A.1.4057999999999999
A.1.4057999999999999

B.1.4058E-3
B.1.4058E-3
B.1.4058E-3

C.0.24057999999999999
C.0.24057999999999999
C.0.24057999999999999

D.0.14058000000000001
D.0.14058000000000001
D.0.14058000000000001

Answer: D.0.14058000000000001
D.0.14058000000000001
D.0.14058000000000001

44 बस, बाईक आणि ट्रेनची गती ही अनुरक्रमे 1:3:5 आहे. जर त्यांच्यापैकी सर्वांनी सारखे अंतर कापले तर बस, बाईक आणि ट्रेनच्या वेळांमधी अनुक्रमे गुणोत्तर काय असेल?

The speeds of bus, bike and train are in the ratio of 1: 3: 5 respectively. If all of them covers equal distance then the ratio of time taken by bus, bike and train are respectively:

بس، موٹر سائیکل اور ٹرین کی رفتار کا تناسب بالترتیب1: 3: 5 ہے۔ اگر یہ تمام مساوی فاصلہ طے کریں تو بس، موٹر سائیکل اور ٹرین کے وقت کا تناسب بالترتیب یہ ہوگا:

A.6 : 7 : 8
A.6 : 7 : 8
A.6 : 7 : 8

B.15 : 5 : 3
B.15 : 5 : 3
B.15 : 5 : 3

C.12 : 7 : 9
C.12 : 7 : 9
C.12 : 7 : 9

D.1 : 3 : 5
D.1 : 3 : 5
D.1 : 3 : 5

Answer: B.15 : 5 : 3
B.15 : 5 : 3
B.15 : 5 : 3

45 $\sqrt[3]{2744} = ?$

A. 14

B. 8

C. 11

D. 81

Answer: A. 14

46 **सूचना**: खालील प्रश्नात एक उघडलेला फासा दाखविला आहे. उत्तराच्या पर्यायांपैकी कोणता पर्याय □ या चिन्हाच्या विरुद्ध बाजूला येईल?

DIRECTIONS: In the following question an unfolded dice is given. From the given alternatives which of the following will be opposite of B?

ہدایات: مندرجہ ذیل سوال میں ایک کھلا ہوا ڈبہ دیا گیا ہے- دئے گئے متبادلات میں مندرجہ ذیل میں سے کون سا B کے برعکس ہو گا؟

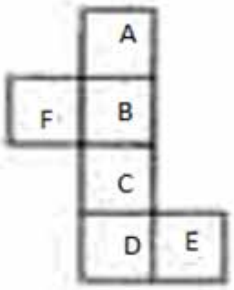

A. A

B. B

C. C

D. D

Answer: D. D

47 निर्देश: खालील व्यवस्था काळजीपूर्वक वाचा आणि खाली दिलेल्या प्रश्नांची उत्तरे द्या.

4 K % R T 3 E P # A 7 B 9 D I Q @ 2 8 V U © H J 5 F 1 % 6 M W

वरील दिलेल्या व्यवस्थे मध्ये खालील पर्याया पैकी डावी कडून 10 व्या संख्या\ अक्षर च्या डावी कडची 3 रे घटक कोणते?

DIRECTIONS: Study the following arrangement carefully and answer the questions given below.

4 K % R T 3 E P # A 7 B 9 D I Q @ 2 8 V U © H J 5 F 1 % 6 M W

Which of the following is the third to the left of the tenth from the left end in the above arrangement?

ہدایت نیچے دی گی ترتیب کو پڑھئے اور سہی جواب دیجئے

4 K % R T 3 E P # A 7 B 9 D I Q @ 2 8 V U © H J 5 F 1 % 6 M W

اپری ترتیب میں الٹے ہاتھ سے دسوی حرف یا نشان کے الٹے ہاتھ سے تیسرا حرف یا نشان کونسا ہیں؟؟

A.E
A.E
A.E

B.9
B.9
B.9

C.B
C.B
C.B

D.P
D.P
D.P

Answer: A.E
A.E
A.E

48 निर्देश: खालील प्रत्येक वर्ण मालिके मध्ये, काही अक्षरे गहाळ आहेत, जे खाली दिलेल्या पर्यायां मध्ये एका क्रमाने दिलेली आहेत. योग्य पर्याय निवडा.

ba - b - aabb - a - - a - b

DIRECTION: In each of the following letter series, some of the letters are missing, which are given in that order as one of the alternatives below it. Choose the correct alternative.

ba - b - aabb - a - - a - b

ہدایت نیچے دے حرف کے سرج مے کچھ حرف گمشدہ ہے نیچے دے گئے اختیارات سے سسہی اختیار چنے

ba - b - aabb - a - - a - b

A.bbaabb
A.bbaabb
A.bbaabb

B.ababba
B.ababba
B.ababba

C.ababab
C.ababab
C.ababab

D.bababa
D.bababa
D.bababa

Answer: B.ababba
B.ababba
B.ababba

49 राम 20 दिवसांत काम पूर्ण करू शकतो. राम आणि श्याम एकत्रितरित्या तेच काम 15 दिवसांत करू शकतात. जर त्यांना त्या कामासाठी रु. 400 देण्यात आले, तर श्यामचा वाटा किती असेल (रुपयांमध्ये).

Ram can do a work in 20 days. Ram and Shyam together do the same work in 15 days. If they are paid Rs.400 for that work, what is the share of Shyam (in Rs.).

رام ایک کام 20 دنوں میں سکتا ہے۔ رام اور شام مل کر وہی کام 15 دنوں میں کرتے ہیں ۔ اگر ان کو اس کام کا 400 روپیہ دیہ جائے تو شام کا کیا حصہ (روپوں میں) ہو گا؟

A.100
A.100
A.100

B.200
B.200
B.200

C.150
C.150
C.150

D.50
D.50
D.50

Answer: A.100
A.100
A.100

50 हे बुलेटीन बोर्ड व फ्लॅनेल बोर्ड आहेत-

Bulletin Board and Flannel Board are—

بلٹین بورڈ اور فلانیل بورڈ

A.एक व तश्याच इतर गोष्टी
A.One and same things
A.ایک ہی یکساں چیزیں

B.भिन्न आकार व रंगात
B.Different in form and colour
B.بناوٹ اور رنگ میں مختلف

C.प्रदर्शित सामग्रीच्या च्या विरुद्ध दृष्टीक्षेपाने
C.Different from the point of view of the material to be displayed
C.ظاہر ہونے والے مواد کے نقطہ نظر سے مختلف

D.सांगू शकत नाही
D.Can't say
D.نہیں کہہ سکتا

Answer: C.प्रदर्शित सामग्रीच्या च्या विरुद्ध दृष्टीक्षेपाने
C.Different from the point of view of the material to be displayed
C.ظاہر ہونے والے مواد کے نقطہ نظر سے مختلف

51 आइक्यूमधील गहन मानसिक मंदतेची संख्या आहे-

Profound mental retardation score in IQ is

عقل میں ذہنی ذہنی استحکام کا اسکور ہے

A.120–130
A.120–130
A.120–130

B.20च्या खाली
B.Below 20
B.20 ذیل میں

C. 35च्या खाली
C.Below 35
C.35 ذیل میں

D.25च्या खाली
D.Below 25
D.25 ذیل میں

Answer: B.20च्या खाली
B.Below 20
B.20 ذیل میں

52 Out of the given options which best expresses the meaning of the given Proverb?
Appearances are deceptive.

	A.We should not believe in things and persons merely by their appearances for they are often unreal
	B.We should believe in things and persons only by their appearances for they are always real
	C.The external appearance of a person is the most important aspect of his or her personality
	D.None of the above
Answer:	A.We should not believe in things and persons merely by their appearances for they are often unreal

53	एक वगळता सर्व गट संरचनेचे घटक आहेत All except one are the elements of group structure ایک کے سوائے سبھی عناصر گروپ کا ڈھانچہ ہیں
	A.ध्रुव A.Pole A.قطب
	B.नियम B.Norms B.اصول
	C.स्थिती C.status C.رتبہ
	D.निसर्ग D.Nature D.فطرت
Answer:	D.निसर्ग D.Nature D.فطرت

54 निर्देश: दिलेल्या अंक मालिकेतील चुकीची संज्ञा शोधा:

48, 24, 72, 34, 108, 54

DIRECTIONS: Find the wrong term in the given number series:

48, 24, 72, 34, 108, 54

ہدایت دے گئے نمبرس سرج مے غلط نمبر کھوجے

48, 24, 72, 34, 108, 54

A.54
A.54
A.54

B.34
B.34
B.34

C.72
C.72
C.72

D.108
D.108
D.108

Answer: B.34
B.34
B.34

55 मुलभूत एसआय एककाची संख्या आहे:

Number of basic SI Units is:

بنیادی ایس آئی یونٹ کا نمبر ہے:

A.4
A.4
A.4

B.7
B.7
B.7

C.6
C.6
C.6

D.5
D.5
D.5

Answer: B.7
B.7
B.7

56 खालीलपैकी विधान वाचा आणि बौद्धिक वयाच्या संदर्भात कोणते बरोबर आहे ते सांगा

Read the statements below and say which of these is true in relation to mental age

ذیل کے بیانات کو پڑھیے اور بتائیں کہ دماغی عمر سے متعلق کون سا بیان درست ہے؟

A.बौद्धिक वयाची संकल्पना अल्फ्रेड बेनेटने सांगितली.
A.Concept of mental age was given by Alfred Benet.
A.دماغی عمر کا نظریہ ، الفریڈ بنٹ نے دیا تھا

B.ते वयाच्या संदर्भात व्यक्त केले होते बुद्धिमत्तेच्या कार्यकारीतेला हे निर्देशित करते.
B.It refers to a measurement of intellectual functioning expressed in terms of age.
B.یہ عمر کے لحاظ سے ظاہر ہونے والے دانشورانہ کام کی پیمائش سے متعلق ہے

C.(a) आणि (b) दोन्ही
C.Both (a) and (b)
C.الف اور ب دونوں

D.हे सत्सत विवेकबुद्धीद्वारे इच्छेवर आधारीत आहे.
D.It is based on conscience will desire.
D. یہ ضمیر، خواہش اور مرضی پر مبنی ہے

Answer: C.(a) आणि (b) दोन्ही
C.Both (a) and (b)
C.الف اور ب دونوں

57 अनुक्रम 30, 60, 90,..... चे 10वे पद शोधा

Find the 10th term of the sequence: 30, 60, 90,.....

90 ,60 ,30 ::؟اس سرج کیدسوی ٹرم کیا ہے,.....

	A.300 A.300 A.300
	B.326 B.326 B.326
	C.360 C.360 C.360
	D.470 D.470 D.470
Answer:	A.300 A.300 A.300

58	Choose the word which is opposite in meaning to the given word. ARROGANT
	A.Modest
	B.Proud
	C.Disrespectful
	D.Haughty
Answer:	A.Modest

59

सूचना: कळीची (मुख्य) आकृती घड्याळाच्या दिशेने किंवा विरुद्ध दिशेने (दिशादर्शक बाण दर्शवितो आहे त्याप्रमाणे) 90^0 फिरविली. दिलेल्या चार पर्यायी आकृत्यांमधील कोणती आकृती या फिरविलेल्या कळीच्या आकृतीचे प्रतिनिधित्व करते आहे?

DIRECTIONS: When the key figure is rotated one step clockwise OR anticlockwise (depending upon the direction of arrow shown), which of the Answer figures given will represent the main figure in the rotated form?

ہدایات : جب کسی مخصوص تصویر کو گھڑی کی چال کی سمت میں یا گھڑی کی چال کی الٹی سمت میں (گھڑی کی سمت کی طرف اشارہ کرنے والے تیر پر منحصر) ایک قدم گھمایا جاتا ہے، تو دئے گئے جواب کی تصاویر میں سے کون خاص تصویر میں گھمائی گئی شکل کی نمائندگی کریگا؟

मुख्य आकृती
Main Figure
خاص تصویر

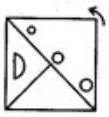

उत्तरासाठी पर्यायी आकृत्या
Answer Figure
جواب کی تصویر

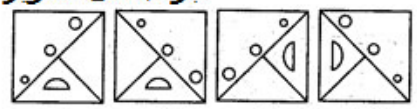

A. (A)

B. (B)

C. (C)

D. (D)

Answer: A. (A)

60 एक शास्त्र म्हणून _____ संशोधन पद्धतीचे शैक्षणिक मानसशास्त्राप्रति मोठे योगदान आहे

_____ Method of research contributed the most to educational psychology as a science

_____ تحقیق کا طریقہ جس نے سائنس کے طور پر سب سے زیادہ تعلیمی نفسیات میں اپنا کردار ادا کیا

A.प्रायोगिक
A.Experimental
A.تجرباتی

B.संशोधन
B.Research
B.تحقیق

C.एकास एक प्रकारे प्रश्न विचारणे
C.One to one Questioning
C. ایک ایک کرکے سوالات

D.ऐतिहासिक
D.Historical
D.تاریخی

Answer: A.प्रायोगिक
A.Experimental
A.تجرباتی

61 सूचना: खालील प्रश्नात उत्तरातील पर्यायांपैकी कोणत्या पर्यायी आकृतीत प्रश्नातील आकृती अंतर्भूत आहे?

DIRECTIONS: In the given question find the answer figure in which question figure is embedded.

ہدایات: دئے گئے سوال میں سے اس جواب والی تصویر کو تلاش کریں جس میں سوال کی تصویر کو جمایا گیا ہے۔

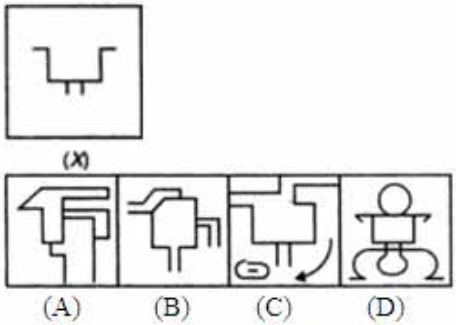

A. (A)

B. (B)

C. (C)

D. (D)

Answer: D. (D)

62 जर लालला निळा म्हटले, निळ्याला पांढरा म्हटले, पांढ-याला काळा म्हटले, काळ्याला हिरवा म्हटले, हिरव्याला नारिंगी म्हटले, आणि नारिंगीला गुलाबी म्हटले. तर समुद्राच्या पाण्याचा रंग कोणता?

If red is called blue, blue is called white, white is called black, black is called green, green is called orange and orange is called pink. What is the colour of sea water.

اگر سرخ کو نیلا، نیلے کو سفید، سفید کو سیاہ، سیاہ کو سبز، سبز کو نارنگی اور نارنگی کو گلابی کہا جائے تو، سمندر کے پانی کا رنگ کیا ہے؟

A.नारिंगी
A.Orange
A.نارنگی

B.पांढरा
B.White
B.سفید

C.हिरवा
C.Green
C.سبز

D.निळा
D.Blue
D.نیلا

Answer: B.पांढरा
B.White
B.سفید

63 खालील आकृतीमध्ये एकूण किती वर्तुळे आहेत?

Find the total number of circles in the figure given below?

ذیل میں دی گئی تصویر میں حلقوں کی کل تعداد معلوم کریں؟

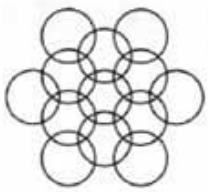

A. 10

B. 11

C. 12

D. 13

Answer: D. 13

64 सूचना: खालील प्रश्नांमध्ये दिलेल्या पर्यायांमधून संबंधित अक्षर/शब्द/संख्या निवडा.

प्रौढ : मूल :: फूल : ?

DIRECTIONS: In the following question, select the related letter/word/number from the given alternatives.

Adult : Baby :: Flower : ?

سمت: مندرجہ ذیل سوال میں، دیے گئے متبادل سے متعلقہ حرف/لفظ/نمبر منتخب کریں۔

بالغ : بچہ :: پھول : ؟

A.बी
A.Seed
A.بیج

B.फळ
B.Fruit
B.پھل

C.कळी
C.Bud
C.کلی

D.फुलपाखरू
D.Butterfly
D.تتلی

Answer: C.कळी
C.Bud
C.کلی

65 Out of the given four words only one is not spelt correctly. Find the word that is not correctly spelt.

A.Farenheite

B.February

C.Fiery

D.Foreign

Answer: A.Farenheite

66 हॉलीवूडच्या अभिनेत्री डेन लोवातो .....या रोगाने ग्रस्त आहे.

Hollywood actress Denn Lovato suffers from

ہالی ووڈ اداکارہ ڈن لواٹو متاثرتھیں:

A.एनोरेक्सिया नर्वोसा
A.Anorexia Nervosa
A.انوریکزیا (عدم اشتہا بھوک) نروسا

B.स्वमग्नता
B.Autism
B.خود تسکینی

C.क्षुधातिरेक
C.Bulimia
C.زائد بھوک

D.स्मृतिभ्रंश
D.Dementia
D.فتور دماغ

Answer: C.क्षुधातिरेक
C.Bulimia
C.زائد بھوک

67 यापैकी कोणती आकृती लाल, हिरवा आणि रंग दर्शवते?

Which of the following figure represents Red, Green and Colour?

مندرجہ ذیل میں سے کون سی ڈایاگرام سرخ، سبز
اور رنگ کی نمائندگی کرتی ہے؟

(A) 

(B) 

(C) 

(D) 

Answer: (A) 

68 निर्देश: मालिका पूर्ण करा

ZUP, KFA, ?, GBW

DIRECTION: Complete the series

ZUP, KFA, ?, GBW

ہدایت اس سرج کو مکمّل کرو

ZUP, KFA, ?, GBW

A.VRL
A.VRL
A.VRL

B.VQL
B.VQL
B.VQL

C.VSL
C.VSL
C.VSL

D.VPL
D.VPL
D.VPL

Answer: B.VQL
B.VQL
B.VQL

69 जर शरीराची गती वाढली तर त्याची संभाव्य उर्जा:

If the velocity of a body increases, then its potential energy:

اگر کسی جسم کی رفتار بڑھ جاتی ہے تو اس کی ممکنہ توانائی:

A.वाढते
A.Increase
A.زیادہ ہوتی ہے

B.घटते
B.Decreases
B.کم ہوتی ہے

C.बदलत नाही
C.Does not change
C.بدلتی نہیں ہے

D.स्थितीवर अवलंबून असते
D.Depend on conditions
D.حالات پر منحصر ہوتا ہے

Answer: C.बदलत नाही
C.Does not change
C.بدلتی نہیں ہے

70 78 ने अचूकपणे विभाज्य असलेली संख्या मिळवण्यासाठी 36798 मधून वजा केलेली सर्वांत लहान संख्या?

The least number to be subtracted from 36798 to get a number which is exactly divisible by 78 is?

36798 سے کم ہونے والی کم از کم تعداد میں 78 نمبر بالکل بالکل تقسیم ہونے کے لئے ہے؟

A.18
A.18
A.18

B.60
B.60
B.60

C.38
C.38
C.38

D.68
D.68
D.68

Answer: B.60
B.60
B.60

71 एक कुत्रा पूर्वेला 20 मी. धावतो आणि उजवीकडे वळून 10 मी. धावतो आणि उजवीकडे वळून 9 मी. धावतो आणि पुन्हा डावीकडे वळून 5 मी. धावतो आणि नंतर डावीकडे वळून 12 मी. धावतो आणि शेवटी डावीकडे वळतो आणि 6 मी. धावतो. आता त्या कुत्र्याचे तोंड कोणत्या दिशेला आहे?

A dog run 20m towards East and Turns to right runs 10m and turns to right runs 9m and again turns to left run 5m and then turns to left runs 12m and finally turns to left and runs 6m. Now which direction dog facing?

ایک کتا مشرق کی جانب20 میٹر دوڑتا ہے پھر داہنی جانب گھوم کر10 میٹر تک دوڑتا ہے اور اس کے بعد داہنی جانب 9 میٹر تک دوڑتا ہے اور پھر بائیں جانب 5 میٹر دوڑتا ہے پھر بائیں جانب 12 میٹر دوڑتا ہے اور بالآخر بائیں جانب مڑتا ہے اور 6 میٹر دوڑتا ہے- اب کتے کا رخ کس سمت میں ہے؟

A.दक्षिण
A.South
A.جنوب

B.पश्चिम
B.West
B.مغرب

C.उत्तर
C.North
C.شمال

D.पूर्व
D.East
D.مشرق

Answer: C.उत्तर
C.North
C.شمال

72 सूचना: खालील प्रश्नांमध्ये दिलेल्या पर्यायांमधून संबंधित अक्षर समूह निवडा.

AG : IO :: EK : ?

DIRECTIONS: In the following question, select the related group of letters from the given alternatives.

AG : IO :: EK : ?

سمت: مندرجہ ذیل سوال میں، دیے گئے متبادل میں سے حروف کا متعلقہ گروپ منتخب کریں۔

AG : IO :: EK : ?

A.LR
A.LR
A.LR

B.MS
B.MS
B.MS

C.PV
C.PV
C.PV

D.SY
D.SY
D.SY

Answer: B.MS
B.MS
B.MS

73 पांढरा फॉस्फरस सामान्यत: येथे ठेवला जातो:

White phosphorus is generally kept in:

سفید فاسفورس عام طور پر _____ میں رکھا جاتا ہے۔

A.पाणी
A.Water
A.پانی

B.रॉकेल
B.Kerosene oil
B.کیروسن تیل

C.इथर
C.Ether
C.ایتھر

D.पारा
D.Mercury
D.مرکری

Answer:

A.पाणी
A.Water
A.پانی

74

सूचना: अर्थपूर्ण परिच्छेद निर्माण करण्यासाठी, खाली दिलेली (P), (Q) (R), (S) आणि (T) ही पाच वाक्ये योग्य अनुक्रमाने पुनर्रचना करा; त्यांनतर खालील प्रश्नांची उत्तर द्या.

P. कुत्रा लोभी बनला आणि त्याने तो तुकडा मिळवायचे ठरविले.
Q. घरी चालत जाताना त्याला एका झऱ्यावरील पूल ओलांडावा लागत होता.
R. त्याने प्रतिबिंबाकडे झोकून दिले आणि त्याने तोंड उघडल्याबरोबर तो मांसाचा तुकडा पाण्यात पडला आणि अदृश्य झाला.
S. एके दिवशी, एका कुत्र्याने एका मांसाचा तुकडा पहिला.
T. तो जात असताना, त्याने स्वतःचे प्रतिबिंब पाण्यात पहिले आणि दुसरा एक कुत्रा मांसाचा तुकडा घेऊन जात असल्याचा त्याने विचार केला.

पुनर्रचना केल्यानंतर खालीलपैकी कोणते वाक्य चौथे असेल?

DIRECTION: Rearrange the following five sentences (P), (Q), (R), (S) and (T) in the proper sequence to form a meaningful paragraph; then answer the questions given below them.
P. The dog got greedy and decided to have that piece as well.
Q. As it walked home, it had to cross a bridge over a stream.
R. He snapped at the reflection, and as soon as he opened his mouth, his piece of meat fell into the water and disappeared.
S. A dog found a piece of meat one day.
T. As it walked, it saw its reflection in the water and thought it was another dog with a piece of meat.

Which of the following should be the FOURTH sentence after rearrangement?

ہدایات: ان پانچ جملوں (P)، (Q)، (R)، (S) اور (T) کو با معنی پیرا بنانے کے لئے دوبارہ ترتیب دیجئے، پھر نیچے دے گئے سوالوں کے جواب دیجئے

P. کتے کو لالچ ہوا ہار وو بھی وو ٹکڑا چاہتا تھا.
Q. جب وو گھر کی طرف نکلا ،اسکو ندی کے اپر پل سے گزر نا تھا.
R. وو چھایا پی بونکھا، اور جونہہی اسنے اپنا منہ کھولا، گوشت کہ ٹکڑا پانی میں گر گیا اور کھو گیا.
S. ایک دن کتے کو گوشت کہ ٹکڑا ملا.
T. جب وو چلا، اسنے پانی میں پرچھائی دیکھی اور سونچا یہ دوسرا کتا ہے گوشت کہ ٹکڑا لیکے.

دوبارہ ترییب دینے کے بعد کون سا جملہ چوتھا ہونا چاہیے؟

A.P
A.P
A.P

B.Q
B.Q
B.Q

C.R
C.R
C.R

D.S
D.S
D.S

Answer: A.P
A.P
A.P

75 खालीलपैकी अशुद्ध शब्द कोणता ?

A.चिंतनीय

B.चिंतवीने

C.चितारणी

D.चितारणे

Answer: B.चिंतवीने

76 पांडा त्याच कुटुंबाचा आहे ज्या कुटुंबाचे हे आहेत—

Panda belongs to the same family as that of—

پانڈا کا تعلق اسی فیملی سے ہے جو _____ کی فیملی ہے۔

A.व्हेल
A.Whale
A.وہیل

B.अस्वल
B.Bear
B.بھالو

C.कांगारू
C.Kangaroo
C.کنگارو

D.पोर्कुपाईन
D.Porcupine
D.کانٹے دار جانور

Answer: B.अस्वल
B.Bear
B.بھالو

77 निर्देश: खालील प्रश्न दिलेल्या शब्दांवर आधारित आहेत.

Lay/ Editor/ Precursor/ Orthodox

प्रत्येक शब्दासमोर ‘P’ ठेवल्यास किती अर्थपूर्ण शब्द तयार होतील?

DIRECTIONS: Following question is based on the given words.

Lay/ Editor/ Precursor/ Orthodox

If ‘P’ is placed before every word then how many meaningful words will be formed?

ہدایت: جیل کے سوال دے ہے لفجونپر مشتمل ہیں

Lay/ Editor /Precursor/ Orthodox

لگایا جائے تو کتنے مکمل الفاظ تیار ہونگے 'P' حرف-

A.एक
A.One
A.ایک

B.दोन
B.Two
B.دو

C.तीन
C.Three
C.تین

D.चार
D.Four
D.چار

Answer: A.एक
A.One
A.ایک

78 असामान्य लैंगिक क्रियाशीलतेच्या (पॅराफीलिया) विकासासाठी खालीलपैकी कशास नियमित घटक म्हणून ग्राह्य धरण्यात येत नाही

Which of the following is not considered to be a rule factor for the development of paraphilia

مندرجہ ذیل میں سے کس کو پیرافیلیا کے ڈیولپمینٹ کے واسطے اصول کا عنصر نہیں سمجھا جاتا ہے

A.सुरुवातीच्या काळातील अमली पदार्थांचा गैरवापर
A.Early drug abuse
A.ابتدائی منشیات کا استعمال

B.अति लैंगिक भूक
B.hypersexuality
B.انتہائی جنسی

C.बाल्यावस्थेतील शोषण
C.childhood abuse
C.بچپن کا غلط استعمال

D.बाल्यावस्थेतील दुर्लक्ष
D.childhood neglect
D.بچپن کا نظرانداز

Answer: A.सुरुवातीच्या काळातील अमली पदार्थांचा गैरवापर
A.Early drug abuse
A.ابتدائی منشیات کا استعمال

79 ‘अभिजन शकुंतल’ आणि ‘मेघदूत’ _____ यांनी लिहिले

‘Abhijana Shakuntalam’ & ‘Meghadoot’ are written by -

ابھیجن شکنتلم اور میگھ دوت کے مصنف ہیں۔

A.सुरदास
A.Surdas
A.سوورداس

B.कालिदास
B.Kalidasa
B.کالی داس

C.शुद्रका
C.Shudraka
C.شودرکا

D.वेद व्यास
D.Ved Vyas
D.ویدویاس

Answer: B.कालिदास
B.Kalidasa
B.کالی داس

80 खालीलपैकी सर्वांत लहान अपूर्णांक शोधा

Find the smallest of the following fractions

مندرجہ ذیل کسور میں سے سب سے چھوٹی کسر تلاش کریں

A.52/25
A.52/25
A.52/25

B.39/17
B.39/17
B.39/17

C.49/24
C.49/24
C.49/24

D.25/12
D.25/12
D.25/12

Answer: C.49/24
C.49/24
C.49/24

81 स्थानीय प्रवाश्यासाठी दिल्लीमध्ये चालणाऱ्या विशेष गाड्यांचे नाव काय आहे?

What is the name of the special trains that run in Delhi for the local passengers?

مقامی مسافروں کے لئے دہلی میں چلائے جانے والی خصوصی ٹرینوں کا نام کیا ہے؟

For More Info And Videos About TAIT-Exam Syllabus And Other Exam Visit My Channel
TAIT च्या 30 प्रश्नपत्रिका PDF
BADSHAHimp Available Request 9765226781
WWW.YouTube.com/BADSHAHimp
Subscribe My Channel

A.बुलेट
A.Bullet
A. بلیٹ ٹرین

B.मेट्रो
B.Metro
B. میٹرو

C.शताब्दी
C.Shatabdi
C. شتابدی

D.राजधानी
D.Rajdhani
D. راجدھانی

Answer: B.मेट्रो
B.Metro
B. میٹرو

82 निर्देश: खालीदिलेल्या अक्षराच्या क्रमात काही अक्षरे गहाळ केली आहेत ते त्या क्रमाने खाली दिलेल्या पर्यायांपैकी एक आहे

ab _ bb _ ccc _ aaa _ b _

DIRECTIONS: In each of the following letter series, same of the letters are missing which are given in that order as one of the alternatives below it.

ab _ bb _ ccc _ aaa _ b _

دایت جیل کے حرف سرج میں کوئی حرف گمشدہ ہے آپکو انکی شناخت جیل کے اختیارات سے کرنی ہے

ab _ bb _ ccc _ aaa _ b _

A.abcab
A.abcab
A.abcab

B.bcabc
B.bcabc
B.bcabc

C.bcacc
C.bcacc
C.bcacc

D.bcabb
D.bcabb
D.bcabb

For More Info And Videos About TAIT-Exam Syllabus And Other Exam Visit My Channel
TAIT च्या 30 प्रश्नपत्रिका PDF Available Request 9765226781
BADSHAHimp
WWW.YouTube.com/BADSHAHimp
Subscribe My Channel

Answer: D.bcabb
D.bcabb
D.bcabb

83 **सूचना:** खालील प्रश्नात, दिलेल्या पर्यायांमधून नातेसंबंध सांगणारी आकृती निवडा.

DIRECTIONS: In the question below, select the related figure from the given altematives.

ہدایات: ذیل کے سوال میں، دئے گئے متبادلات میں سے متعلقہ تصویر منتخب کریں۔

Problem Figures:

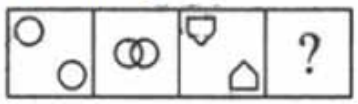

(A) (B) (C) (D)

Answer Figures:

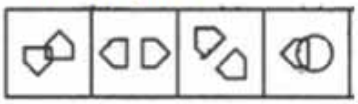

(1) (2) (3) (4)

A. 1

B. 2

C. 3

D. 4

Answer: A. 1

For More Info And Videos About TAIT-Exam Syllabus And Other Exam Visit My Channel
TAIT च्या 30 प्रश्नपत्रिका PDF Available Request 9765226781 BADSHAHimp
WWW.YouTube.com/BADSHAHimp Subscribe My Channel

84 सूचना: दोन विधाने आणि त्यानंतर दोन निष्कर्ष, I आणि II दिले आहेत. ही विधाने सामान्यतः ज्ञात वस्तुस्थितीपेक्षा भिन्न असली तरी सत्य आहेत असे समजा. दिलेल्यापैकी कोणता निष्कर्ष दिलेल्या विधानांवरुन नक्की काढता येऊ शकतो हे तुम्ही ठरवायचे आहे.तुमचे उत्तर सूचित करा.

विधाने:
एकही लहान मूल मतदार नसते.
काही मतदार प्रौढ आहेत.

निष्कर्ष:
I. सर्व प्रौढ मतदार असतात.
II. एकही मतदार लहान मूल नसतो.

DIRECTION: Two statements are given following by two conclusions, I, and II. You have to consider that statements to be true, even if they seem to be at variance from commonly known facts. You are to decide which of the given conclusions can definitely be drawn from the given statements. Indicate your answer.

Statements:
No children are voters.
Some voters are adulds.
Conclusion:
I. All adults are voters.
II. No voters are children.

ہدایات: دو سٹیٹمنٹ جوکہ دو خلاصوں پر مشتمل ہیں. I، اور II. اپ کو وہ سٹیٹمنٹ درست ماننا ہے، اگرچہ دکہنے میں وہ بہت سارے حقاٰق ست مطبقت رکہتی ہو۔ اپ کو دیے گے خلاصوں میں سے یقینی طور پر اسے اختیار کرنا ہے جو سٹیٹمنٹ سے نکلا ہو. اپنا جواب تلاش کرے.

اظہار بیان:
کوئی بھی بچھ ووٹر نہیں ہے.
کچھ ووٹرز بالغ ہیں.
نتائج:
I. تمام جواں ووٹرز ہے.
II. کوئی بھی ووٹر بچھ نہیں ہے.

A.केवळ निष्कर्ष I निघतो
A.Only conclusion I follows
A. خالی نتائج I تعاقب کرتا ہے

B.केवळ निष्कर्ष II निघतो
B.Only conclusion II follows
B. خالی نتائج II تعاقب کرتا ہے

C.दोन्ही निष्कर्ष I आणि II निष्कर्ष निघेल
C.Both conclusion I and II follows
C. دونوں نتائج I اور II تعاقب کرتے ہے

For More Info And Videos About TAIT-Exam Syllabus And Other Exam Visit My Channel
TAIT च्या 30 प्रश्नपत्रिका PDF Available Request 9765226781
BADSHAHimp
YouTube WWW.YouTube.com/BADSHAHimp
Subscribe My Channel

D.I किंवा II निष्कर्षही निघणार नाही
D.Neither conclusion I nor II follows
D. نتائج نہ I نہ II تعاقب کرتا ہے

Answer: D.I किंवा II निष्कर्षही निघणार नाही
D.Neither conclusion I nor II follows
D. نتائج نہ I نہ II تعاقب کرتا ہے

85 खालील आकृतीत M चे मूल्य शोधा.
Find the value of M in the following figure.
کی کمات نیچے مے سے کھوجے. M

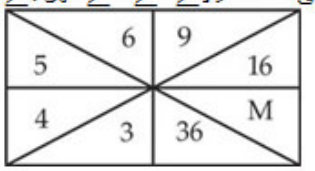

A. 25

B. 36

C. 49

D. 42

Answer: A. 25

86 जर x:y=5:2, तर x^3: y^3 चे मूल्य शोधा.

If x:y=5:2, then find the value of x^3: y^3?

اگر x:y=5:2، تو پھر x^3: y^3 کی قدر معلوم کریں؟

A.8:1
A.8:1
A.8:1

B.125:8
B.125:8
B.125:8

C.15:6
C.15:6
C.15:6

For More Info And Videos About TAIT-Exam Syllabus And Other Exam Visit My Channel
TAIT च्या 30 प्रश्नपत्रिका PDF
BADSHAHimp Available Request 9765226781
WWW.YouTube.com/BADSHAHimp
Subscribe My Channel

D.25:4
D.25:4
D.25:4

Answer: B.125:8
B.125:8
B.125:8

87 D हा Kचा भाऊ आहे. M ही K ची बहीण आहे. T हा R चा पिता आहे जो M चा भाऊ आहे, F ही K ची आई आहे. T आणि F यांना किती मुले आहेत?

D is K's brother. M is K's sister. T is R's father who is M's brother, F is K's mother. Atleast how many sons do T and F have?

K D کا بھائی ہے. K M کی بہن ہے. R T کا باپ ہے جو M کا بھائی ہے، K F کم سے کم. کم سے کم F اور T کی ماں ہے۔ F کے کتنے بیٹے ہے؟

A.2
A.2
A.2

B.3
B.3
B.3

C.4
C.4
C.4

D.माहिती अपुरी आहे
D.Data inadequate
D. ڈیٹا ناکافی

Answer: A.2
A.2
A.2

88 प्रतिभासंपन्न मुले अशी असतात

Children who are gifted are

بچے جنہیں تحفہ دیا گیا ہے

For More Info And Videos About TAIT-Exam Syllabus And Other Exam Visit My Channel
TAIT च्या 30 प्रश्नपत्रिका PDF
BADSHAHimp Available Request 9765226781
WWW.YouTube.com/BADSHAHimp
Subscribe My Channel

A.आपल्या गरजांबाबत आग्रही नसणे
A.Nonassertive of their needs
A.بغیر تحکمانہ ان کے ضروریات

B.स्वतंत्रपणे निर्णय घेणारी
B.Independent in their judgments
B.اپنے فیصلوں میں آزاد

C.शिक्षकांवर अवलंबून नसणारी
C.Independent of teachers
C.معلمین کی آزادی

D.स्वभावाने अंतर्मुख
D.Introvert in nature
D.فطرتی باطنی

Answer:

B.स्वतंत्रपणे निर्णय घेणारी
B.Independent in their judgments
B.اپنے فیصلوں میں آزاد

89

दिलेल्या पर्यायांमधून वेगळे ते निवडा.

Choose the odd one out from the given alternatives.

دیے گئے متبادل میں سے بے جوڑ کو چنیں۔

A.विवेक
A.Conscience
A.ضمیر

B.नैतिकता
B.Morality
B.اخلاقیات

C.वर्तणूक
C.Conduct
C.برتاؤ

D.वजन
D.Weight
D.وزن

Answer:

D.वजन
D.Weight
D.وزن

For More Info And Videos About TAIT-Exam Syllabus And Other Exam Visit My Channel
TAIT च्या 30 प्रश्नपत्रिका PDF
BADSHAHimp Available Request 9765226781
WWW.YouTube.com/BADSHAHimp
Subscribe My Channel

90	मुल्यांकन एका विशिष्ट गुणधर्माबद्दल सांगते The evaluation tells about a trait— تقویم ایک خاصیت کے بارے میں بتاتا ہے-
	A.त्याच्या सध्याच्या प्रमाणाबद्दल माहिती देते A.How much of its quantity is present A.اس کی کتنی مقدار موجود ہے
	B.त्या विशिष्ट गुणधर्माचे मूल्य काय आहे B.What is the value of that trait B.اس کی خاصیت کی کیا قدر ہے
	C.हे गुणधर्म कसे व्यक्त केले जाऊ शकते C.How can be expressed that trait C.اس طرح کی علامات کا اظہار کیسے کیا جا سکتا ہے
	D.हे गुणधर्म कसे मोजले जाऊ शकते D.How can be measured that trait D.اس طرح کی علامات کی پیمائش کیسے کی جا سکتی ہے
Answer:	B.त्या विशिष्ट गुणधर्माचे मूल्य काय आहे B.What is the value of that trait B.اس کی خاصیت کی کیا قدر ہے
91	फतेहपूर सिक्री हे _____ या राज्यामध्ये आहे Fatehpur Sikri is in the state of – فتح پور سیکری کس صوبہ میں ہے
	A.मध्य प्रदेश A.Madhya Pradesh A.مدھیہ پردیش میں
	B.छत्तीसगढ B.Chattisgarh B.چھتیس گڑھ میں
	C.हरियाणा C.Haryana C.ہریانہ میں
	D.उत्तर प्रदेश D.Uttar Pradesh D.اترپردیش میں

Answer: D.उत्तर प्रदेश
D.Uttar Pradesh
D.اترپردیش میں

92 सूचना: खालील प्रश्नांमध्ये दिलेल्या पर्यायांमधून संबंधित अक्षर/शब्द/संख्या निवडा.

स्केटिंग : रिंक :: ?

DIRECTIONS: In the following question, select the related letter/word/number from the given alternatives.

Skating : Rink :: ?

سمت: مندرجہ ذیل سوال میں، دیے گئے متبادل سے متعلقہ حرف/لفظ/نمبر منتخب کریں۔

اسکیٹنگ: اسکیٹنگ کا تختہ :: ؟

A.मुष्टियुद्ध : रिंगण
A.Boxing:Arena
A.باکسنگ:اکھاڑا

B.क्रिकेट : बॉल
B.Cricket:Ball
B.کرکٹ:گیند

C.आनंद : हसणे
C.Joy : Laugh
C.خوشی : ہنسنا

D.घाम : गरम
D.Sweat : Hot
D.پسینہ : گرمی

Answer: A.मुष्टियुद्ध : रिंगण
A.Boxing:Arena
A.باکسنگ:اکھاڑا

For More Info And Videos About TAIT-Exam Syllabus And Other Exam Visit My Channel
TAIT च्या 30 प्रश्नपत्रिका PDF Available Request 9765226781
BADSHAHimp
WWW.YouTube.com/BADSHAHimp
Subscribe My Channel

93 सूचना: प्रत्येक प्रश्नाला एक प्रमुख विधानासोबत चार विधाने आहेत ज्यांच्याखाली A, B, C आणि D असे चार विधान आहेत. क्रमवार विधानांची जोडी निवडा ज्यामध्ये प्रथम विधान दुसऱ्या विधानाला सुचवते, आणि दोन्ही विधाने तर्किकदृष्ट्या प्रमुख विधानासोबत निगडित असेल.

जर तो वेळेत आला, तर मी त्याच्याशी मिटिंग करेन
A. तो वेळेवर आला
B. तो वेळेवर आला नाही
C. मी त्याच्याशी मिटिंग केली
D. मी त्याच्याशी मिटिंग केली नाही

DIRECTIONS: Each question has a main statement followed by four statements labelled A, B, C and D. Choose the ordered pair of statements, where the first statement implies the second, and the two statements are logically consistent with the main statement.

If he comes on time , I will have meeting with him
A. He came on time
B. He did not come on time
C. I had meeting with him
D. I did not have meeting with him.

ہدایت: ہر سوال میں ایک جملہ ہے جسکے بعد چار جملےاے، بی،سی اور ڈی کے نام سے دئے گئے ہیں اسمیں منسلک جوڑیوں کو چنئے۔ جہاں پہلا جملہ دوسرے جملہ کی اور اشارہ کر رہا ہے اور دو جملے منطقی مرکزی بیان کے مطابق ہیں

اگر وہ حکومت پر تنقید کرتا ہے تو ٹوئٹر پر ٹرول کیا جائے گا۔
Aوہ وقت آ گیا ۔
Bوہ وقت نہیں آیا تھا ۔
Cمیری اسکے ساتھ میٹنگ تھی ۔
Dمیری اسکے ساتھ میٹنگ نہیں تھی ۔

A.AB
A.AB
A.AB

B.BC
B.BC
B.BC

C.DA
C.DA
C.DA

D.DB
D.DB
D.DB

For More Info And Videos About TAIT-Exam Syllabus And Other Exam Visit My Channel
TAIT च्या 30 प्रश्नपत्रिका PDF
BADSHAHimp Available Request 9765226781
YouTube WWW.YouTube.com/BADSHAHimp
Subscribe My Channel

Answer: D.DB
D.DB
D.DB

94 सूचना: अर्थपूर्ण परिच्छेद निर्माण करण्यासाठी, खाली दिलेली (P), (Q) (R), (S) आणि (T) ही पाच वाक्ये योग्य अनुक्रमाने पुनर्रचना करा; त्यांनतर खालील प्रश्नांची उत्तर द्या.

P. कुत्रा लोभी बनला आणि त्याने तो तुकडा मिळवायचे ठरविले.
Q. घरी चालत जाताना त्याला एका झऱ्यावरील पूल ओलांडावा लागत होता.
R. त्याने प्रतिबिंबाकडे झोकून दिले आणि त्याने तोंड उघडल्याबरोबर तो मांसाचा तुकडा पाण्यात पडला आणि अदृश्य झाला.
S. एके दिवशी, एका कुत्र्याने एका मांसाचा तुकडा पहिला.
T. तो जात असताना, त्याने स्वतःचे प्रतिबिंब पाण्यात पहिले आणि दुसरा एक कुत्रा मांसाचा तुकडा घेऊन जात असल्याचा त्याने विचार केला.

पुनर्रचना केल्यानंतर खालीलपैकी कोणते वाक्य पहिले असेल?

DIRECTION: Rearrange the following five sentences (P), (Q), (R), (S) and (T) in the proper sequence to form a meaningful paragraph; then answer the questions given below them.
P. The dog got greedy and decided to have that piece as well.
Q. As it walked home, it had to cross a bridge over a stream.
R. He snapped at the reflection, and as soon as he opened his mouth, his piece of meat fell into the water and disappeared.
S. A dog found a piece of meat one day.
T. As it walked, it saw its reflection in the water and thought it was another dog with a piece of meat.

Which of the following should be the FIRST sentence after rearrangement?

ہدایات: ان پانچ جملوں (P)، (Q)، (R)، (S) اور (T) کو با معنی پیرا بنانے کے لئے دوبارہ ترتیب دیجئے، پھر نیچے دے گئے سوالوں کے جواب دیجئے

P. کتے کو لالچ ہوا ہار وو بھی وو ٹکڑا چاہتا تھا.
Q. جب وو گھر کی طرف نکلا ،اسکو ندی کے اپر پل سے گزر نا تھا.
R. وو چھایا پی بونکھا، اور جونہہی اسنے اپنا منہ کھولا، گوشت کہ ٹکڑا پانی میں گر گیا اور کھو گیا.
S. ایک دن کتے کو گوشت کہ ٹکڑا ملا.
T. جب وو چلا، اسنے پانی میں پرچھائی دیکھی اور سونچا یہ دوسرا کتا ہے گوشت کہ ٹکڑا لیکے.

دوبارہ ترییب دینے کے بعد کون سا جملہ پہلے ہونا چاہیے؟

A.S
A.S
A.S

B.T
B.T
B.T

C.Q
C.Q
C.Q

D.R
D.R
D.R

Answer: A.S
A.S
A.S

95 खालीलपैकी कोणते टाकाऊ पदार्थ खत तयार करण्यासाठी जिवाणूद्वारे विघटित केले जाऊ शकत नाही?

Which of the following wastes cannot be decomposed by bacteria to form compost?

مندرجہ ذیل کچرے میں سے کون سا کچرا کھاد کی تشکیل کے لئے بیکٹیریا کے ذریعہ سڑایا نہیں جا سکتا ؟

A.स्वयंपाकघरातील टाकाऊ पदार्थ
A.Kitchen wastes
A. باورچی خانہ کا کچرا

B.प्लास्टीक आणि पॉलिथिन पिशव्या
B.Plastic and polythene bags
B. پلاسٹک اور پولی تھین کے تھیلے

C.मृत वनस्पती
C.Dead plants
C. مردار پودے

D.मातीमध्ये रहाणाऱ्या किटानूची शरीरे
D.Bodies of insects living in the soil
D. مٹی میں رہنے والے کیڑوں کی لاشیں کو

Answer: B.प्लास्टीक आणि पॉलिथिन पिशव्या
B.Plastic and polythene bags
B. پلاسٹک اور پولی تھین کے تھیلے

96 Out of the given options, choose the one which is the correct active voice of the sentence given below.
His property was agreed to be disposed of by him.

A.He agreed to dispose of his property.

B.He have agreed to dispose of his property.

C.He had agree to dispose of his property.

D.He has agree to dispose of his property.

Answer: A.He agreed to dispose of his property.

97 राष्ट्राध्यक्षांनी प्रस्थापित केलेला वटहुकुम:

An ordinance promulgated by the President:

صدر کی طرف سے جاری ایک آرڈیننس

A.संसदेचया आधिवेशनाचे आयोजन झाल्यापासून सहा आठावडे पूर्ण झाले की रद्द होईल
A.Will lapse on the expiry of 6 weeks from the convening of Parliament's session
A. پارلیمنٹ کے سیشن کے انعقاد سے 6 ہفتے کےاندر ختم ہو جاتا ہے

B.दोन महिन्याने आपोआप रद्द होईल
B.Will automatically lapse after 2 months
B. خود بخود 2 ماہ میں ختم ہو جاتا ہے

C.सहा महिन्याने आपोआप कायदा बनतो.
C.Automatically becomes a law after six months.
C. خود بخود چھ ماہ کے بعد ایک قانون بن جاتا ہے.

D.संसदेच्या कायद्याने त्याची जागा घेईपर्यंत जारी असेल.
D.Will continue to be in force till it is Superseded by an Act of the parliament.
D. یہ تک جاتا کی طرف سے فوقیت فوج میں بنے رہیں گے.

Answer: A.संसदेचया आधिवेशनाचे आयोजन झाल्यापासून सहा आठावडे पूर्ण झाले की रद्द होईल
A.Will lapse on the expiry of 6 weeks from the convening of Parliament's session
A. پارلیمنٹ کے سیشن کے انعقاد سے 6 ہفتے کےاندر ختم ہو جاتا ہے

98 7 किमीला मीटरमध्ये रूपांतरीत करा.

Convert 7 km into meter.

7-کلومیٹر کو میٹر میں بدلیں

A.7077 मी
A.7077 m
A.7077 میٹر

For More Info And Videos About TAIT-Exam Syllabus And Other Exam Visit My Channel
TAIT च्या 30 प्रश्नपत्रिका PDF
BADSHAHimp Available Request 9765226781
WWW.YouTube.com/BADSHAHimp
Subscribe My Channel

B.7000 मी
B.7000 m
B.7000 میٹر

C.7070 मी
C.7070 m
C.7070 میٹر

D.7707 मी
D.7707 m
D.7707 میٹر

Answer: B.7000 मी
B.7000 m
B.7000 میٹر

99 रोग निदानतेच्या शिक्षणाची गरज भासत आहे जेव्हा-

The necessity of Diagnostic teaching is being felt when—

تشخیصی تعلیم کی ضرورت محسوس ہوتی ہے جب-

A.विद्यार्थी काही कठीण संकल्पनेचे पालन करू शकत नसल्यास
A.The students are unable to follow some difficult concepts
A.طالب علم کچھ مشکل تصورات کو پورا کرنے میں قاصر ہیں

B.विद्यार्थी काही तथ्ये स्पष्ट करण्यास असमर्थ ठरतात
B.The students are unable to explain some facts
B.طلباء کچھ حقائق کی وضاحت کرنے میں قاصر ہیں

C.विद्यार्थी अभ्यास करण्यास कंटाळा करतात
C.The students are disinterested in studying
C.طالب علم پڑھنے میں غیر دلچسپ ہیں

D.विद्यार्थी दैवी गुण संपन्न असतात
D.The students are gifted
D.طالب علم گفٹڈ ہیں

Answer: A.विद्यार्थी काही कठीण संकल्पनेचे पालन करू शकत नसल्यास
A.The students are unable to follow some difficult concepts
A.طالب علم کچھ مشکل تصورات کو پورا کرنے میں قاصر ہیں

For More Info And Videos About TAIT-Exam Syllabus And Other Exam Visit My Channel
TAIT च्या 30 प्रश्नपत्रिका PDF
BADSHAHimp Available Request 9765226781
WWW.YouTube.com/BADSHAHimp
Subscribe My Channel

100	कोणत्या प्राण्यापासून मुल्यवान पशिमा लोकर मिळते? From which animal is the valuable pashmina wool obtained? قیمتی پشمینہ اون کس جانور سے حاصل کی جاتی ہے؟
	A.काळी मेंढी A.Black sheep A. سیاہ بھیڑ
	B.हिमालयाची शेळी B.Himalayan goat B. ہمالیائی بکری
	C.हरण C.Deer C. ہرن
	D.ससा D.Rabbit D. خرگوش
Answer:	B.हिमालयाची शेळी B.Himalayan goat B. ہمالیائی بکری
101	शैक्षणिक दूरचित्रवाणीचे कार्यक्रमशी निगडीत असतात. The Educational Television programme is related to — - تعلیمی ٹیلی ویژن پروگرام --- سے متعلق ہے
	A.स्वास्थ्य A.Health A.صحت
	B.संस्कृती B.Culture B.ثقافت
	C.सामाजिक जागरुकता C.General awareness C.عمومی بیداری
	D.वरील सर्व D.All the above D.مذکورہ تمام

Answer: D.वरील सर्व
D.All the above
D.مذکورہ تمام

102 84321261 खालीलपैकी कोणासोबत विभाज्य आहे?

84321261 is divisible by which of the following?

84321261 مندرجہ ذیل میں کس سے قابل تقسیم ہے؟

A.8
A.8
A.8

B.7
B.7
B.7

C.9
C.9
C.9

D.11
D.11
D.11

Answer: C.9
C.9
C.9

103 6 ते 7 वाजण्यादरम्यान मिनिट आणि तास काटा कधी 180° चा कोन तयार करेल?

When did the minute and hour hand makes 180° angle between 6 to 7 O' clock?

6 سے 7 بجے کے درمیان، منٹ اور گھنٹے کی سوئیاں کب 1800 زاویہ بناتی ہیں؟

(A) $6:54\frac{6}{11}$

(B) 6:60

(C) 6:00

(D) $6:5\frac{5}{11}$

Answer: (C) 6:00

104 पांढरा आणि गुळगुळीत पृष्ठ म्हणजे —

A white and smooth surface is —

ایک سفید اور ہموار سطح _____ ہوتی ہے۔

A.उष्णतेचा चांगला अवशोषक आणि चांगला परावर्तक
A.Good absorber and good reflector of Heat
A.گرمی کی اچھی جاذب اور اچھی منعکس کار

B.उष्णतेचा खराब अवशोषक आणि चांगला परावर्तक
B.Bad absorber and good reflector of Heat
B.گرمی کی بری جاذب اور اچھی منعکس کار

C.उष्णतेचा चांगला अवशोषक आणि खराब अवशोषक
C.Good absorber and bad reflector of Heat
C.گرمی کی اچھی جاذب اور بری منعکس کار

D.उष्णतेचा खराब अवशोषक आणि खराब अवशोषक
D.Bad absorber and bad reflector of Heat
D.گرمی کی بری جاذب اور بری منعکس کار

Answer: B.उष्णतेचा खराब अवशोषक आणि चांगला परावर्तक
B.Bad absorber and good reflector of Heat
B.گرمی کی بری جاذب اور اچھی منعکس کار

105 एखाद्या विद्यार्थ्याला वर्गातून डब्बे चोरण्याची सवय लागली आहे. अश्याप्रसंगी आपल्याला कशी प्रतिक्रिया द्यावी वाटेल?

A student has developed the habit of stealing the lunch boxes in the class. What reaction would you like to show in this case?

ایک طالب علم نے کلاس میں دوپہر کے لنچ بکسوں کو چوری کرنے کی عادت اپنا کی ہے۔ اس صورت میں آپ کو کیا ردعمل ظاہر کرنا ہوگا؟

A.सवय मोडावी म्हणून, कठीनातील कठीण शिक्षा देऊ
A.Harsh punitive measures, to repress the habit
A.عادت کو سخت کرنے کے لئے سخت سزا اور اقدامات

For More Info And Videos About TAIT-Exam Syllabus And Other Exam Visit My Channel
TAIT च्या 30 प्रश्नपत्रिका PDF
BADSHAHimp Available Request 9765226781
WWW.YouTube.com/BADSHAHimp
Subscribe My Channel

B.अश्या उपाययोजनेचा वापर करू जेणेकरून तो ती सवय सोडून देणार
B.Try to adopt such measures as he gives up the habit
B.اس طرح کے اقدامات کو اپنانے کی کوشش کریں تاکہ وہ عادت ترک کر دے

C.त्याच्या आवडीचे जेवण आणा
C.Bring favorable lunch for him
C.اس کے لئے دوپہر کا مناسب کھانا لے لو

D.त्याच्या पालकांचे अपमान करू
D.Making insult of his parents.
D.اپنے والدین کی توہین کرنا.

Answer: B.अश्या उपाययोजनेचा वापर करू जेणेकरून तो ती सवय सोडून देणार
B.Try to adopt such measures as he gives up the habit
B.اس طرح کے اقدامات کو اپنانے کی کوشش کریں تاکہ وہ عادت ترک کر دے

106 सूचना: खालील माहितीचा काळजीपूर्वक अभ्यास करा आणि दिलेल्या प्रश्नांची उत्तरे द्या.
सात मजली इमारतीमध्ये मजल्यांना एक ते सात असे आकडे दिलेले आहेत. P, Q, R, S, T आणि V पैकी प्रत्येक जण वेगवेगळ्या मजल्यावर राहतो. (तळ मजल्याला मजला क्र.१ नाव दिले आहे आणि त्याच्या वरच्या मजल्यांना मजला क्र.२ आणि पुढे नावे दिलेली आहेत. इमारतीचा एक मजला रिकामा आहे. P पाचव्या मजल्यावर राहतो. पाचव्या मजल्या खालचा कोणताही मजला रिकामा नाही, विषम संख्या असलेला कोणताही मजला रिकामा नाही. T आणि Vच्या मध्ये केवळ S राहतो. T विषम संख्या असलेल्या मजल्यावर राहत नाही. T R राहत असलेल्या मजल्याच्या लगेच वर किंवा लगेच खालच्या मजल्यावर राहत नाही. Q तळमजल्यावर राहत नाही.
खालील पैकी कोणता मजला रिकामा आहे?

DIRECTIONS: Study the following information carefully and answer the given questions.
In a seven storey building, having floors numbered one to seven. P, Q, R, S, T and V each live on a different floor. (The ground floor is numbered floor no. 1, the floor above it floor no. 2 and so on. One of the floors in the building is vacant. P lives on the fifth floor. No floor below fifth floor is vacant; also no odd numbered floor is vacant. Only S lives between T and V. T does not live on an odd numbered floor. T does not live on a floor immediately above or immediately below R's floor. Q does not live on the bottom most floor.
Which of the following floor is vacant?

ہدایات: مندرجہ ذیل معلومات کو دھیان سے پڑھیں اور دیے گئے سوالوں کے جواب دیں۔
P، Q، R، S، T، U اور V ایک سات منزلہ عمارت میں، جس میں فلور کے نمبر ایک سے سات ہیں میں سے ہر ایک مختلف فلور پر پانچویں P رہتا ہے۔ (گراؤنڈ فلور کا نمبر 1 ہے، اس کے اوپر کا فلور نمبر 2 ہے اور اسی طرح آگے)۔ عمارت میں ایک فلور خالی ہے۔ کے درمیان V اور T فلور پر رہتا ہے۔ پانچویں فلور سے نیچے کوئی فلور خالی نہیں ہے؛ نیز کوئی بھی طاق عدد کا فلور خالی نہیں ہے۔ سب Q کے اوپری یا نچلے فلور پر نہیں رہتا ہے۔ R فوری طور پر T ایک طاق عدد کے فلور پر نہیں رہتا ہے۔ T رہتا ہے۔ S صرف سے نچلے فلور پر نہیں رہتا ہے۔
مندرجہ ذیل میں سے کون سا فلور خالی ہے؟

A.सातव्या
A.Seventh
A.ساتواں

For More Info And Videos About TAIT-Exam Syllabus And Other Exam Visit My Channel
TAIT च्या 30 प्रश्नपत्रिका PDF
BADSHAHimp Available Request 9765226781
YouTube WWW.YouTube.com/BADSHAHimp
Subscribe My Channel

B.सहाव्या
B.Sixth
B.چھٹا

C.तिसऱ्या
C.Third
C.تیسرا

D.दुसऱ्या
D.Second
D.دوسرا

Answer: B.सहाव्या
B.Sixth
B.چھٹا

107 सूचना: प्रत्येक प्रश्नाला एक प्रमुख विधानासोबत चार विधाने आहेत ज्यांच्याखाली A, B, C आणि D असे चार विधान आहेत. क्रमवार विधानांची जोडी निवडा ज्यामध्ये प्रथम विधान दुसऱ्या विधानाला सुचवते, आणि दोन्ही विधाने तर्किकदृष्ट्या प्रमुख विधानासोबत निगडित असेल.

तो आठवड्याच्या शेवटी किंवा बुधवारी कॉल करतो.
A. त्याने आठवड्याच्या शेवटी कॉल केला.
B. त्याने आठवड्याच्या शेवटी कॉल केला नाही.
C. त्याने बुधवारी कॉल केला.
D. त्याने बुधवारी कॉल केला नाही.

DIRECTIONS: Each question has a main statement followed by four statements labelled A, B, C and D. Choose the ordered pair of statements, where the first statement implies the second, and the two statements are logically consistent with the main statement.

He calls either on weekends or on Wednesday
A.He called on weekends
B.He did not call on weekends
C.He called on Wednesday
D.He did not call on Wednesday

ہدایت: ہر سوال میں ایک جملہ ہے جسکے بعد چار جملےاے، بی،سی اور ڈی کے نام سے دئے گئے ہیں اسمیں منسلک جوڑیوں کو چنئے۔ جہاں پہلا جملہ دوسرے جملہ کی اور اشارہ کر رہا ہے اور دو جملے منطقی مرکزی بیان کے مطابق ہیں

وہ یا ویک اینڈ پر کال کرتا ہے یا بدھ کو
Aاس نے ویک اینڈ پر کال کی ۔
Bاس نے ویک اینڈ پر کال نہیں کی ۔
Cاس نے بدھ کو کال کی ۔
Dاس نے بدھ کو کال نہیں کی ۔

For More Info And Videos About TAIT-Exam Syllabus And Other Exam Visit My Channel
TAIT च्या 30 प्रश्नपत्रिका PDF
BADSHAHimp Available Request 9765226781
WWW.YouTube.com/BADSHAHimp
Subscribe My Channel

A.BD
A.BD
A.BD

B.DA
B.DA
B.DA

C.CB
C.CB
C.CB

D.AC
D.AC
D.AC

Answer: B.DA
B.DA
B.DA

108 **सूचना:** खालील प्रश्नात एक उघडलेला फासा दाखविला आहे. उत्तराच्या पर्यायांपैकी कोणता पर्याय 5 या चिन्हाच्या विरुद्ध बाजूला येईल?

DIRECTIONS: In the following question an unfolded dice is given. From the given alternatives which of the following will be opposite of?

ہدایات: مندرجہ ذیل سوال میں ایک کھلا ہوا ڈبہ دیا گیا ہے- دئے گئے متبادلات میں مندرجہ ذیل میں سے کون 5 کے برعکس ہو گا؟

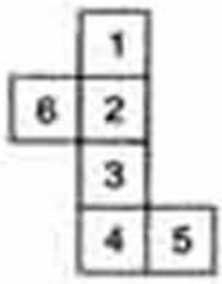

A. 3

B. 2

C. 6

D. 4

Answer: C. 6

For More Info And Videos About TAIT-Exam Syllabus And Other Exam Visit My Channel
TAIT च्या 30 प्रश्नपत्रिका PDF
BADSHAHimp Available Request 9765226781
WWW.YouTube.com/BADSHAHimp
Subscribe My Channel

109 विधान:
वसतिगृहात रॅगिंगच्या विरोधात नव्याने सामील झालेल्या महाविद्यालयीन विद्यार्थ्यांनी तक्रार केली. प्रशासन तक्रार दाखल करण्यास नकार देत आहे. ते दावा करीत आहेत की गेल्या 5 वर्षांपासून रॅगिंगचा एकही गुन्हा दाखल झालेला नाही.

कृतीचा कोर्स:
I. अधिकाऱ्यांनी तक्रार नोंदवावी.
II. नव्याने सामील झालेल्या विद्यार्थ्यांना निलंबित करावे.

Statement:
The newly joined college students complained against the ragging in the hostel. The administration is refusing to acknowledge the complaint. They are claiming that in last 5years not a single case of ragging has been registered.
Course of actions:
I. The authorities should register the complaint.
II. The newly joined students should be suspended.

بیان:
کالج میں نئے آنے والے طلباء نے ہاسٹل میں اپنے خلاف ریگنگ کی شکایت کی۔ انتظامیہ شکایت تسلیم کرنے سے انکار کر رہی ہے۔ ان کا دعویٰ ہے کہ پچھلے 5 سال کے دوران ریگنگ کا ایک بھی واقع رجسٹر نہیں کروایا گیا۔

لائحہ عمل:
I۔حکام کو شکایت درج کرنی چاہیے۔
II۔ نئے آنے والے طلباء کو معطل کر دینا چاہیے۔

A.फक्त I अनुसरून आहे
A.Only I follows
A. صرف I لاگو ہو گا۔

B.फक्त II अनुसरण करते आहे
B.Only II follows
B. صرف II لاگو ہو گا۔

C.एकतर I किंवा II अनुसरून आहे
C.Either I or II follows
C. I یا II میں سے ایک لاگو ہو گا۔

D.I किंवा II दोन्हीपैकी काहीही अनुसरण करत नाही
D.Neither I nor II follows
D. I اور II میں سے کوئی بھی لاگو نہیں ہو گا۔

Answer: A.फक्त I अनुसरून आहे
A.Only I follows
A. صرف I لاگو ہو گا۔

110	खालीलपैकी शुद्ध वाक्य कोणते ?
	A.जहाजावर सुरक्षित पिण्याचे पाणी उपलब्ध नाही.
	B.जहाजाला सुरक्षित पिण्याचे पाणी उपलब्ध नाही.
	C.जहाजाला पिण्याचे नीट पाणी उपलब्ध नाही.
	D.जहाजावर सुरक्षित पिण्याला पाणी उपलब्ध नाही.
Answer:	A.जहाजावर सुरक्षित पिण्याचे पाणी उपलब्ध नाही.

111	कलम कला ही मुळची _____ या राज्यातील आहे The Kalam art form is indigenous to the state of - کلام آرٹ کس صوبہ کا حصہ ہے۔
	A.कर्नाटक A.Karnataka A.کرناٹک کا
	B.केरळ B.Kerala B.کیرالہ کا
	C.तामिळनाडू C.Tamil Nadu C.تامل ناڈو کا
	D.यांपैकी कोणतेही नाही D.None of these D.ان میں سے کوئی نہیں
Answer:	B.केरळ B.Kerala B.کیرالہ کا

112	बाबरने _____ ला पराभूत करून भारतामध्ये मुघल सत्ता स्थापित केली Babur established Mughal rule in India by defeating the – بابر نے بھارت میں مغل حکومت ---- کو ہراکر قائم کی تھی

A.खिलजी
A.Khilji
A.خلجیوں

B.तुघलक
B.Tughalaq
B.تغلقوں

C.लोधी
C.Lodhis
C.لودھیوں

D.यांपैकी कोणतेही नाही
D.None of these
D.ان میں سے کوئی نہیں

Answer: C.लोधी
C.Lodhis
C.لودھیوں

113 सूचना: खालील माहितीचा काळजीपूर्वक अभ्यास करा आणि दिलेल्या प्रश्नांची उत्तरे द्या.
सात मजली इमारतीमध्ये मजल्यांना एक ते सात असे आकडे दिलेले आहेत. P, Q, R, S, T आणि V पैकी प्रत्येक जण वेगवेगळ्या मजल्यावर राहतो. (तळ मजल्याला मजला क्र.१ नाव दिले आहे आणि त्याच्या वरच्या मजल्यांना मजला क्र.२ आणि पुढे नावे दिलेली आहेत. इमारतीचा एक मजला रिकामा आहे. P पाचव्या मजल्यावर राहतो. पाचव्या मजल्या खालचा कोणताही मजला रिकामा नाही, विषम संख्या असलेला कोणताही मजला रिकामा नाही. T आणि Vच्या मध्ये केवळ S राहतो. T विषम संख्या असलेल्या मजल्यावर राहत नाही. T R राहत असलेल्या मजल्याच्या लगेच वर किंवा लगेच खालच्या मजल्यावर राहत नाही. Q तळमजल्यावर राहत नाही.
सर्वात वरच्या मजल्यावर कोण राहतो?

DIRECTIONS: Study the following information carefully and answer the given questions.
In a seven storey building, having floors numbered one to seven. P, Q, R, S, T and V each live on a different floor. (The ground floor is numbered floor no. 1, the floor above it floor no. 2 and so on. One of the floors in the building is vacant. P lives on the fifth floor. No floor below fifth floor is vacant; also no odd numbered floor is vacant. Only S lives between T and V. T does not live on an odd numbered floor. T does not live on a floor immediately above or immediately below R's floor. Q does not live on the bottom most floor.
Who lives on the topmost floor?

ہدایات: مندرجہ ذیل معلومات کو دھیان سے پڑھیں اور دیے گئے سوالوں کے جواب دیں۔
P، Q، R، S، T، U اور V ایک سات منزلہ عمارت میں، جس میں فلور کے نمبر ایک سے سات ہیں میں سے ہر ایک مختلف فلور پر پانچویں P رہتا ہے۔ (گراؤنڈ فلور کا نمبر 1 ہے، اس کے اوپر کا فلور نمبر 2 ہے اور اسی طرح آگے)۔ عمارت میں ایک فلور خالی ہے۔ کے درمیان V اور T فلور پر رہتا ہے۔ پانچویں فلور سے نیچے کوئی فلور خالی نہیں ہے؛ نیز کوئی بھی طاق عدد کا فلور خالی نہیں ہے۔ سب Q کے اوپری یا نچلے فلور پر نہیں رہتا ہے۔ R فوری طور پر T ایک طاق عدد کے فلور پر نہیں رہتا ہے۔ T رہتا ہے۔ S صرف سے نچلے فلور پر نہیں رہتا ہے۔
سب سے اوپری فلور پر کون رہتا ہے؟

A.Q
A.Q
A.Q

B.S
B.S
B.S

C.R
C.R
C.R

D.V
D.V
D.V

Answer: A.Q
A.Q
A.Q

114 DIRECTIONS: A sentence with an underlined phrasal verb is given below. Out of the four options, choose the one which can be substituted for the given phrasal Verb.
Their taxi pulled up outside the church.

A.stopped

B.repaired

C.damaged

D.accelerated

Answer: A.stopped

115 विद्यार्थ्यांना अभ्यासात्मक योजना बनवताना, ह्या गोष्टी कामात येणार नाही-

In helping students to make educational plans, it is unwise for them to—

تعلیمی منصوبے بنانے میں طالب علموں کی مدد کرنے کے لئے، یہ ان کے لئے غیر عقلمندانہ ہے،کہ

A.व्यावसायिक विषयांसह इतर विषय एकत्र करने
A.Mix general with vocational subjects
A.پیشہ ورانہ مضامین کے ساتھ عام کو ملانا

For More Info And Videos About TAIT-Exam Syllabus And Other Exam Visit My Channel
TAIT चया 30 प्रश्नपत्रिका PDF
BADSHAHimp Available Request 9765226781
YouTube WWW.YouTube.com/BADSHAHimp
Subscribe My Channel

B.एकाच क्षेत्रातील सर्व विषयांची निवड करणे
B.Select all their subjects from one field
B.ان کے تمام مضامین کو ایک میدان سے منتخب کریں

C.महाविद्यालयीन प्रवेशापूर्वीच विषयांचे साहित्य घेणे
C.Take typing with college preparatory subjects
C.کالج کی تیاری کے مضامین کے ساتھ ٹائپنگ لینا

D.पुढील एका वर्षापेक्षा जास्त कार्यक्रमांची तयारी करा
D.Plan their programmes more than a year ahead
D.ان کے پروگراموں کی ایک سال پہلے سے منصوبہ بندی کریں

Answer: B.एकाच क्षेत्रातील सर्व विषयांची निवड करणे
B.Select all their subjects from one field
B.ان کے تمام مضامین کو ایک میدان سے منتخب کریں

116 $y^2 - 26y + 169 = 0$ या वर्गसमीकरणाची मुळे आहेत:

The roots of the quadratic equation $y^2 - 26y + 169 = 0$ are:

$y^2 - 26y + 169 = 0$ مربع مساوات کے روٹ ہیں:

A.13, 13
A.13, 13
A.13, 13

B.-13, -13
B.-13, -13
B.-13, -13

C.13, 2
C.13, 2
C.13, 2

D.-13, -2
D.-13, -2
D.-13, -2

Answer: A.13, 13
A.13, 13
A.13, 13

For More Info And Videos About TAIT-Exam Syllabus And Other Exam Visit My Channel
TAIT च्या 30 प्रश्नपत्रिका PDF
BADSHAHimp Available Request 9765226781
YouTube WWW.YouTube.com/BADSHAHimp
Subscribe My Channel

117 सूचना: प्रत्येक प्रश्नाला एक प्रमुख विधानासोबत चार विधाने आहेत ज्यांच्याखाली A, B, C आणि D असे चार विधान आहेत. क्रमवार विधानांची जोडी निवडा ज्यामध्ये प्रथम विधान दुसऱ्या विधानाला सुचवते, आणि दोन्ही विधाने तर्किकदृष्ट्या प्रमुख विधानासोबत निगडित असेल.

जर त्याने माझा सल्ला घेतला, तर मी त्याला धोक्यापासून वाचवू शकेन
A. त्याने माझा सल्ला घेतला
B. त्याने माझा सल्ला घेतला नाही
C. मी त्याला धोक्यापासून वाचवले
D. मी त्याला धोका होऊ दिला

DIRECTIONS: Each question has a main statement followed by four statements labelled A, B, C and D. Choose the ordered pair of statements, where the first statement implies the second, and the two statements are logically consistent with the main statement.

If he takes my advice , I will prevent him from taking risk.
A. he took my advice
B. he did not take my advice
C. I prevented him from taking risk.
D. I let him take the risk.

ہدایت: ہر سوال میں ایک جملہ ہے جسکے بعد چار جملےاے، بی،سی اور ڈی کے نام سے دئے گئے ہیں اسمیں منسلک جوڑیوں کو چنئے۔ جہاں پہلا جملہ دوسرے جملہ کی اور اشارہ کر رہا ہے اور دو جملے منطقی مرکزی بیان کے مطابق ہیں

اگر وہ میرے مشورے پر عمل کرے تو میں اسے رسک لینے سے بچا سکتا ہوں۔
Aاس نے میرا مشورہ مان لیا ۔
Bاس نے میرا مشورہ نہیں مانا ۔
Cمیں نے اسے رسک لینے سے بچا لیا ۔
Dمیں نے اسے رسک لینے دیا ۔

A.AB
A.AB
A.AB

B.BC
B.BC
B.BC

C.DA
C.DA
C.DA

D.DB
D.DB
D.DB

Answer: D.DB
D.DB
D.DB

118 खालीलपैकी स्त्रीलिंगी शब्द ओळखा.

A.प्रजा

B.प्रत

C.प्रचीती

D.वरील सर्व

Answer: D.वरील सर्व

119 **सूचना**: दिलेल्या पर्यायांमधून श्रेणी पूर्ण करणारी योग्य आकृती निवडा.

DIRECTIONS: Complete the series by choosing right figure from the given choices.

ہدایات: دئے گئے انتخابات میں سے صحیح تصویر منتخب کرکے سلسلہ مکمل کریں-

प्रश्न आकृती
Problem Figure
مسئلہ کی تصویر

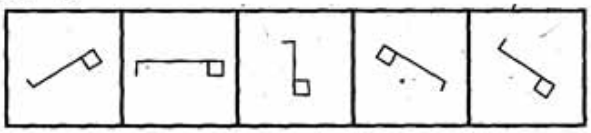

उत्तरासाठी पर्यायी आकृत्या
Answer Figures
جواب کی تصاویر

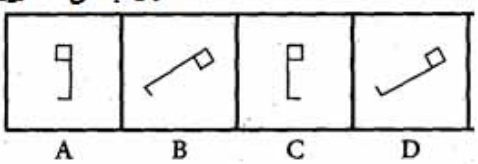

A. (A)

B. (B)

C. (C)

D. (D)

Answer: C. (C)

120	खालीलपैकी अशुद्ध वाक्य कोणते ?
	A.पुस्तक वाचनात माझा वेळ छान जातो.
	B.गोव्याकडची माणसे माझी आठवण काढतात.
	C.ते सदा आमच्या पैश्याला दारू पीत राहिले.
	D.बोलण्याच्या ओघात त्यांचा विषय निघाला.
Answer:	C.ते सदा आमच्या पैश्याला दारू पीत राहिले.

121	खालील पैकी कोणता सर्वात महत्वाचा ध्वनी-प्रसारक आहे? Which one of the following is the most important audio-aid? مندرجہ ذیل میں سے کونسی ایک اہم آڈیو امداد ہے؟
	A.रेडीओ A.Radio A.ریڈیو
	B.लाऊडस्पीकर B.Loudspeaker B.لاؤڈ سپیکر
	C.दूरचित्रवाणी C.TV. C.ٹی وی.
	D.वॉकी- टोकी D.Walky-Talky D.واکی ٹاکی
Answer:	A.रेडीओ A.Radio A.ریڈیو

122	अल्ट्रासोनीक तरंग यामुळे ओळखल्या जातात- Ultrasonic waves can be detected by - الٹراسونک لہروں کا _____ کے ذریعہ پتہ لگایا جا سکتا ہے۔
	A.दूरध्वनी A.Telephone A.ٹیلیفون
	B.हेब्ज पद्धत B.Hebb’s method B.ہیب کا قاعدہ
	C.कुंड्स ट्युब पद्धत C.Kundt’s tube method C.کنڈٹ کا ٹیوب قاعدہ
	D.क्विंक्स टयुब D.Quinck’s tube D.کوینک کا ٹیوب
Answer:	C.कुंड्स ट्युब पद्धत C.Kundt’s tube method C.کنڈٹ کا ٹیوب قاعدہ

123 सूचना: खालील दिलेल्या प्रश्नामध्ये काही विधाने आणि काही निष्कर्ष आहेत. सामन्यात: ज्ञात तथ्यांपेक्षा ते वेगळे असतील तर दिलेली विधाने तुम्हाला सत्य मानवी लागतील आणि त्यानंतर दिलेल्या विधानाचे अनुकरण दिलेल्यापैकी कोणता निष्कर्ष तार्किकदृष्ट्या करतो ते ठरवा.

विधाने:
A< Z≥ P >R > T
निष्कर्ष:
I. T > Z
II. Z >R

DIRECTIONS: In the question given below, there are few statements followed by few conclusions. You have to take the given statements to be true even if they seem to be at variance with commonly known facts and then decide which of the given conclusion logically follow(s) from the given statements.

Statements:
A < Z ≥ P > R > T
Conclusions:
I. T > Z
II. Z > R

ہدایات: مندرجہ ذیل سوال میں، کچھ بیانات کے بعد کچھ نتائج موجود ہیں. اگر آپ کو عام طور پر جانے جاتے حقائق کے ساتھ بھی متغیر ہونے لگے تو بھی آپ دئے گئے بیانات دماغ میں رکھیں اور پھر اس بات کا فیصلہ کریں کہ ذیل میں دیا گیا کونسا نتیجہ منطقانہ طور پر دیے گئے بیانات کی پیروی کرتا ہے.

بیانات:
A< Z≥ P >R > T
نتائج:
T > Z .I
Z >R .II

A.तर फक्त I निष्कर्ष खरा आहे
A.If only Conclusion I is true
A.اگر صرف I نتیجہ درست ہے

B.तर फक्त II निष्कर्ष खरा आहे
B.If only Conclusion II is true
B.اگر صرف نتیجہ II درست ہے

C.तर I किंवा II यापैकी एक निष्कर्ष खरा आहे
C.If either Conclusion I or II is true
C.اگر I اور II نتائج میں سے ایک درست ہے

D.तर I व II हे दोन्हीही निष्कर्ष खरे नाहीत
D.If neither Conclusion I nor II is true
D.اگر I اور II نتائج میں سے کوئی بھی درست نہیں

Answer: B.तर फक्त II निष्कर्ष खरा आहे
B.If only Conclusion II is true
B.اگر صرف نتیجہ II درست ہے

124 ‘ भर्त्सना ‘ या शब्दाचा समानार्थी शब्द कोणता ?

A.स्तुती

B.तिरस्कार

C.तारीफ

D.वत्सनाभ

Answer: B.तिरस्कार

125 **सूचना**: खालील प्रश्नात चार आकृत्या दिल्या आहेत. तीन आकृत्यांमध्ये एक विशिष्ट साम्य आहे आणि त्यामुळे त्यांचा एक गट तयार होतो. या गटात न बसणारी आकृती शोधून काढा.

DIRECTIONS: In the following question, four/five figures are given. Three/four are similar in a certain way and so form a group. Find out which one of the figures does not belong to that group.

ہدایات: مندرجہ ذیل سوال میں، 4 / 5 تصویریں دی گئی ہیں- 3 / 4 ایک مخصوص طریقے میں ایک جیسی ہیں اور اس طرح ایک گروپ تشکیل کرتی ہیں- یہ معلوم کریں کہ ان میں سے کس تصویر کا تعلق اس گروپ سے نہیں ہے-

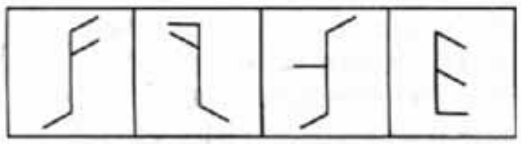

A. (A)

B. (B)

C. (C)

D. (D)

Answer: D. (D)

126 हे शिकण्यात शाब्दिक मार्गदर्शन कुचकामी आहे

Verbal guidance is least effective in the learning of

کس چیز کے سیکھنے میں زبانی ہدایات سب سے کم موثر ہے

A.कल
A.Aptitudes
A.برتاو

B.कौशल्ये
B.Skills
B.مہارت

C.वृत्ती
C.Attitudes
C.طرز عمل

D.नाती
D.Relationship
D.رشتہ

Answer: B.कौशल्ये
B.Skills
B.مہارت

127 दुसऱ्या व्यक्तीच्या किंवा गटाच्या विनंतीला प्रतिसादाला ____ म्हणले जाते.

Behaving in response to a request from another person or group is

کسی دوسرے گروپ یا شخص کی کسی درخواست پر جواب دیتے ہوئے کوئی رویہ اختیار کرنا کہلاتا ہے:

A.स्वीकृती
A.Acceptance
A.منظوری

B.नकार
B.Denial
B.انکار

C.अनुपालन
C.Compliance
C. تکمیل حکم

D.अनुग्रह
D.Obligation
D.فرض

Answer: C.अनुपालन
C.Compliance
C. تکمیل حکم

128 सूचना: दिलेल्या पर्यायांमधून श्रेणी पूर्ण करणारी योग्य आकृती निवडा.

DIRECTIONS: Complete the series by choosing right figure from the given choices.

ہدایات: دئے گئے انتخابات میں سے صحیح تصویر کو منتخب کرکے سلسلہ مکمل کریں۔

Problem Figures

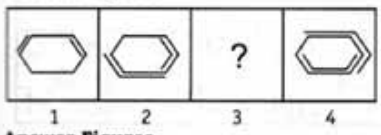

Answer Figures

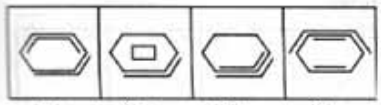

A. (A)

B. (B)

C. (C)

D. (D)

Answer: C. (C)

129 d = 70°, b = 120° दिले आहे, तर:

It is given that d = 70°, b = 120°, then:

دیا گیا ہے پھر: b = 120° ،d = 70°

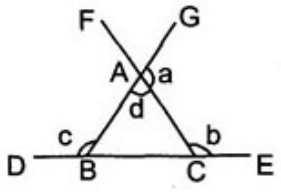

(A) c= 130°

(B) a= 110°

दोन्ही (A) आणि (B) बरोबर आहेत

(C) Both (A) and (B) are correct

دونوں (B) اور (A) درست ہیں

दोन्ही (A) आणि (B) चुकीचे आहेत

(D) Both (A) and (B) are wrong

دونوں (B) اور (A) غلط ہیں

Answer:

दोन्ही (A) आणि (B) बरोबर आहेत

(C) Both (A) and (B) are correct

دونوں (B) اور (A) درست ہیں

130 ‘बिहू’ भारतातील कोणत्या राज्याचे एक लोकनृत्य आहे?

‘Bihu’ is a folk dance of which of the following States in India?

بیہو بھارت کی مندرجہ ذیل ریاستوں میں سے کس ریاست کا لوک رقص ہے ؟

A.राजस्थान
A.Rajasthan
A. راجستھان

B.तमिळनाडू
B.Tamil Nadu
B. تامل ناڈو

C.असाम
C.Assam
C. آسام

D.उत्तर प्रदेश
D.Uttar Pradesh
D. اتر پردیش

Answer: C.असाम
C.Assam
C. آسام

131 ‘ मर्दुमकी ‘ या शब्दाचा विरुद्धार्थी शब्द कोणता ?

A.भेकडपणा

B.शौर्य

C.पराक्रम

D.असभ्यपणा

Answer: A.भेकडपणा

132 खालीलपैकी शुद्ध शब्द कोणता ?

A.जीवापाड

B.जिवापाड

C.जीवापड

D.जीवपद

Answer: B.जिवापाड

133 संख्येच्या एक पंचमांश भाग हा त्याच्या एक सप्तमांशापेक्षा 154 ने जास्त आहे. ती संख्या काढा?

One fifth of a number exceeds its one seventh by 154. Find the number?

ایک عدد کا پانچواں حصہ اس کے ساتویں حصے سے 154 مرتبہ بڑا۔عدد معلوم کریں؟

A.2695
A.2695
A.2695

B.2606
B.2606
B.2606

C.2700
C.2700
C.2700

D.350
D.350
D.350

Answer: A.2695
A.2695
A.2695

134 निर्देश: खालील प्रश्नामध्ये प्रश्न चिन्हाच्या (?) जागी काय येईल?
475 + 0.64 × 950 = 900 + ?

DIRECTIONS: What will come in place of the question mark (?) in the following question?
475 + 0.64 × 950 = 900 + ?

ہدایت: نیچے دئے ہوئے سوالات میں سوالیہ نشان (؟) کی جگہ کیا آئیگا۔
475 + 0.64 × 950 = 900 + ?

A.183
A.183
A.183

B.233
B.233
B.233

C.1983
C.1983
C.1983

D.1863
D.1863
D.1863

Answer: A.183
A.183
A.183

135	$\sqrt{\frac{81}{4096}} = ?$
	A. 6
	B. 5
	C. 18/7
	D. 9/64
Answer:	D. 9/64

136	‘कॉड’ याचा प्रकार आहे— ‘Cod’ is a variety of— 'کاڈ' _____ کی ایک قسم ہے۔'
	A.मेंढी A.Goat A.بکری
	B.मासा B.Fish B.مچھلی
	C.धान्य C.Crop C.فصل
	D.प्रवाळ D.Coral D.مونگا) حجر البحر)
Answer:	B.मासा B.Fish B.مچھلی

137 संच= {1, 3, 5, 7, 9, 11, 13, 15} मधून यादच्छिकपणे निवडलेल्या संख्येची 3 च्या पटीत असण्याची संभाव्यता

The probability that a number chosen at random from the set B = {1, 3, 5, 7, 9, 11, 13, 15} being a multiple of 3 is

سیٹ B = {1، 3، 5، 7، 9، 11، 13، 15} سے بے ترتیب انداز سےمنتخب کردہ ایک نمبر 3 سے قابل ضرب اس بات کا امکان ہے کہ ہے.

A.1/4
A.1/4
A.1/4

B.5/8
B.5/8
B.5/8

C.3/4
C.3/4
C.3/4

D.3/8
D.3/8
D.3/8

Answer: D.3/8
D.3/8
D.3/8

138 **सूचना**: खालील प्रश्नात उत्तरातील पर्यायांपैकी कोणत्या पर्यायी आकृतीत प्रश्नातील आकृती अंतर्भूत आहे?

DIRECTIONS: In the given question find the answer figure in which question figure is embedded.

ہدایات: دئے گئے سوال میں جواب کی اس تصویر کو تلاش کریں جس میں سوالات کی تصویرمنسلک ہے-

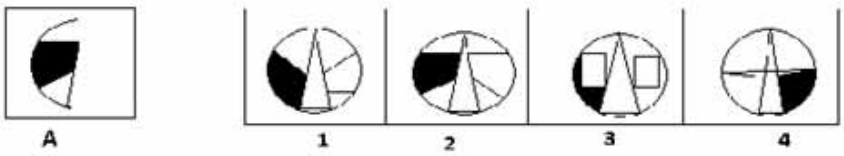

A. (A)

B. (B)

C. (C)

D. (D)

Answer: B. (B)

139 **सूचना**: खालील प्रश्नात कागदाच्या एक तुकड्याला प्रश्नातील आकृतीत दाखविल्याप्रमाणे घड्या घातल्या आहेत. उत्तरादाखल पर्यायांमधून अशी आकृती निवडा जी भोके पडल्यानंतर उलगडलेल्या कागदाचे स्वरूप दाखवेल.

DIRECTIONS: A piece of paper is folded as shown below in the question figures. From the given answer figures, Indicate how it will appear when opened?

ہدایات: کاغذ کے ایک ٹکڑے کو ذیل میں سوال کی تصاویر کے مطابق موڑا جاتا ہے- دی گئی جواب کی تصاویر سے، اس بات کی نشاندہی کیجیے کہ کھولے جانے پر یہ کیسا نظر آئے گا؟

Question Figures

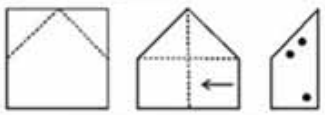

Answer figure

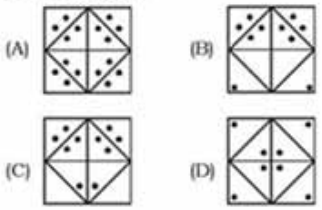

A. (A)

B. (B)

C. (C)

D. (D)

Answer: C. (C)

140 ग्रीसची राजधानी _____ कोणती आहे?

What is the capital of Greece?

گریس کی راجدھانی ہے-

A.मेसेडोनिया
A.Macedonia
A.میسی ڈونیہ

B.रोम
B.Rome
B.روم

C.अथेंन्स
C.Athens
C.ایتھینس

D.पालिकिर
D.Palikir
D.پالیکیر

Answer: C.अथेंन्स
C.Athens
C.ایتھینس

141 आंतरराष्ट्रीय योगा दिन कधी साजरा केला जातो?

When is the International Yoga Day observed?

عالمی یوگا دن منایا جاتا ہے۔

A.21 जून
A.42907
A. 21 جون

B.22 जून
B.42908
B.22 جون

C.23 जून
C.42909
C.23جون

D.24 जून
D.42910
D.24 جون

Answer: A.21 जून
A.42907
A. 21 جون

142 ‘ उद्दाम ‘ या शब्दाचा समानार्थी शब्द कोणता ?

A.विनयी

B.जाणूनबुजून

C.मर्यादशील

D.मुजोर

Answer: D.मुजोर

143 दिलेल्या पर्यायांमधून वेगळे ते निवडा.

Choose the odd one out from the given alternatives.

دیے گئے متبادل میں سے بے جوڑ کو چنیں۔

A.कादंबरी
A.Novel
A.ناول

B.वृत्तपत्र
B.Neswpaper
B.اخبار

C.नियतकालिक
C.Magzine
C.میگزین

D.दूरचित्रवाणी
D.Television
D.ٹیلی ویژن

Answer: D.दूरचित्रवाणी
D.Television
D.ٹیلی ویژن

144 वडीलांचे वय त्यांच्या मुलाच्या वयाच्या तीन पट आहे. 12 वर्षांनंतर वडीलांचे वय मुलाच्या वयापेक्षा दुप्पट होईल. वडीलांचे वर्तमान वय काय आहे?

A father is three times as old as his son. 12 years later the father becomes twice older than his son. What is the present age of the father?

والد اپنے بیٹے سے تین گنا بڑا ہے۔12 سال بعد والد کی عمر بیٹے کی عمر کے دوگنا زیادہ ہو جاتی ہے۔والد کی موجودہ عمر کیا ہے؟

A.36
A.36
A.36

B.48
B.48
B.48

C.54
C.54
C.54

D.42
D.42
D.42

Answer: A.36
A.36
A.36

145 Fill in the blank with the correct article.
_____Arctic Ocean is the smallest and shallowest of the world's five major oceans.

A.The

B.A

C.An

D.No article required

Answer: A.The

146 सरळ रूप द्या:
67+(–67)+67+(–67)+67+(–67) =?

Simplify:
67+(–67)+67+(–67)+67+(–67) =?

سادہ بنائیں:
67+(–67)+67+(–67)+67+(–67) = ?

A.100
A.100
A.100

B.1
B.1
B.1

C.0
C.0
C.0

D.10
D.10
D.10

Answer: C.0
C.0
C.0

147 **सूचना:** कागदाच्या एक चौरस तुकड्याला प्रश्नातील (मुख्य) आकृतीत दाखविल्याप्रमाणे मध्यभागी दोन घड्या घातल्या व भोके पाडली तर तो उलगडल्यानंतर कसा दिसेल? उत्तरादाखल दिलेल्या A, B, C, आणि D पर्यायांमधून योग्य आकृती निवडा.

DIRECTIONS: If a square sheet of paper is folded two times from the centre and cuts are made as shown in the problem figure (or main figure) how will it appear when it is opened? Select the appropriate figure from the Answer Figures marked A, B, C, and D.

ہدایات: اگر کاغذ کے ایک چوکور شیٹ کو اس کے بیچ سے دو دفعہ موڑا جاتا ہے اور اسے مسئلہ کی تصویر (یا خاص تصویر) کے مطابق کاٹا جاتا ہے، تو کھولنے پر یہ کیسا نظر آئے گا؟ A، B، C، اور D کے طور پر لگائے گئے نشان والے جواب کی تصاویر میں سے مناسب اتصویر کا انتخاب کریں۔

मुख्य आकृती
Main Figure
خاص تصویر



उत्तरासाठी पर्यायी आकृत्या
Answer Figures
جواب کی تصاویر

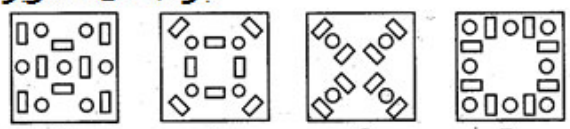

A. (A)

B. (B)

C. (C)

D. (D)

Answer: C. (C)

148 सूचना: अर्थपूर्ण परिच्छेद निर्माण करण्यासाठी, खाली दिलेली (P), (Q) (R), (S) आणि (T) ही पाच वाक्ये योग्य अनुक्रमाने पुनर्रचना करा; त्यांनतर खालील प्रश्नांची उत्तर द्या.

P. कुत्रा लोभी बनला आणि त्याने तो तुकडा मिळवायचे ठरविले.
Q. घरी चालत जाताना त्याला एका झऱ्यावरील पूल ओलांडावा लागत होता.
R. त्याने प्रतिबिंबाकडे झोकून दिले आणि त्याने तोंड उघडल्याबरोबर तो मांसाचा तुकडा पाण्यात पडला आणि अदृश्य झाला.
S. एके दिवशी, एका कुत्र्याने एका मांसाचा तुकडा पहिला.
T. तो जात असताना, त्याने स्वतःचे प्रतिबिंब पाण्यात पहिले आणि दुसरा एक कुत्रा मांसाचा तुकडा घेऊन जात असल्याचा त्याने विचार केला.

पुनर्रचना केल्यानंतर खालीलपैकी कोणते वाक्य तिसरे असेल?

DIRECTION: Rearrange the following five sentences (P), (Q), (R), (S) and (T) in the proper sequence to form a meaningful paragraph; then answer the questions given below them.
P. The dog got greedy and decided to have that piece as well.
Q. As it walked home, it had to cross a bridge over a stream.
R. He snapped at the reflection, and as soon as he opened his mouth, his piece of meat fell into the water and disappeared.
S. A dog found a piece of meat one day.
T. As it walked, it saw its reflection in the water and thought it was another dog with a piece of meat.

Which of the following should be the THIRD sentence after rearrangement?

ہدایات: ان پانچ جملوں (P)، (Q)، (R)، (S) اور (T) کو با معنی پیرا بنانے کے لئے دوبارہ ترتیب دیجئے، پھر نیچے دے گئے سوالوں کے جواب دیجئے

P. کتے کو لالچ ہوا ہار وو بھی وو ٹکڑا چاہتا تھا.
Q. جب وو گھر کی طرف نکلا ،اسکو ندی کے اپر پل سے گزر نا تھا.
R. وو چھایا پی بونکھا، اور جونہہی اسنے اپنا منہ کھولا، گوشت کہ ٹکڑا پانی میں گر گیا اور کھو گیا.
S. ایک دن کتے کو گوشت کہ ٹکڑا ملا.
T. جب وو چلا، اسنے پانی میں پرچھائی دیکھی اور سونچا یہ دوسرا کتا ہے گوشت کہ ٹکڑا لیکے.

دوبارہ ترییب دینے کے بعد کون سا جملہ تیسرا ہونا چاہیے؟

A.T
A.T
A.T

B.P
B.P
B.P

C.Q
C.Q
C.Q

	D.S D.S D.S
Answer:	A.T A.T A.T
149	A sentence with an underlined idiomatic expression is given. What is the meaning of the idiomatic expression ‘nip something in the bud’ in the sentence given below? I've noticed that Tommy's getting in the bad habit of chewing with is mouth open. Let's nip that in the bud.
	A.To stop, cease, or prevent something at the beginning or early phase, before it becomes too difficult or unmanageable
	B.To encourage or promote an activity owing to its beneficial nature
	C.To undergo a surgical operation
	D.None of the above
Answer:	A.To stop, cease, or prevent something at the beginning or early phase, before it becomes too difficult or unmanageable
150	Out of the given four words only one is spelt correctly. Find the word that is correctly spelt.
	A.Familiar
	B.Suprise
	C.Successfull
	D.Suparceede
Answer:	A.Familiar

151 दिलेल्या पर्यायांपैकी वेगळे ते निवडा:

Select the odd one out from the given options:

دیے گئے اختیارات میں سے بے جوڑ کو منتخب کریں:

A.MOON
A.MOON
A.MOON

B.ORSW
B.ORSW
B.ORSW

C.JKLT
C.JKLT
C.JKLT

D.FGHP
D.FGHP
D.FGHP

Answer:
A.MOON
A.MOON
A.MOON

152 B हा Cच्या आजोबांच्या एकुलत्या मुलीचे एकूलते मूल आहे. C च्या वडिलांचे B सोबत नाते काय?

B is the only child of C's paternal grandfather's only daughter. How is C's father related to B?

C B کے دادا کی واحد بیٹی کا واحد بچھ ہے. C کے باپ کا B سے کیا رشتہ ہے؟

A.मामा
A.Maternal Uncle
A.ماما

B.काका
B.Paternal Uncle
B.چچا

C.वडील
C.Father
C.باپ

D.यापैकी काही नाही
D.None of these
D.ان میں سے کوئی نہیں

Answer: A.मामा
A.Maternal Uncle
A.ماما

153 चारुचे घर वाणीच्या घराच्या पूर्वेला 30 मीटर अंतरावर आहे. रीमाचे घर वाणीच्या घराच्या उत्तरेला 40 मीटर अंतरावर आहे. तर वाणीच्या आणि चारुच्या घरांमधे किती अंतर आहे?

Charu’s house is to the east of Vani’s house at a distance of 30 metres. Reema’s house is in the north direction of Vani’s house at a distance of 40 metres. What is the distance between Reena's and Charu's house?

چارو کا گھر وانی کے گھر کے مشرق کی طرف 30 میٹر کے فاصلے پر ہے۔ ریما کا گھر وانی کے گھر کے شمال کی سمت میں 40 میٹر کے فاصلے پر ہے۔ وانی اور چارو کے گھر کے درمیان کتنا فاصلہ ہے؟

A.50 मीटर
A.50 metres
A.50 میٹر

B.30 मीटर
B.30 metres
B.30 میٹر

C.20 मीटर
C.20 metres
C.20 میٹر

D.10 मीटर
D.10 metres
D.10 میٹر

Answer: A.50 मीटर
A.50 metres
A.50 میٹر

154 एरिक्सनच्या सिद्धांतात व्यक्ती पौगंडावस्थेत साधारणपणे ____ विकसित करण्यावर आणि मग प्रौढत्वादरम्यान ____वर लक्ष केंद्रित करतात.

In Erickson’s theory individuals generally focus on developing _____during adolescence and then _____ during adulthood

ارکسن کے نظریے کے مطابق منفردشخص عام طور پر سن بلوغ کے دوران _____ کی ترقی پر زور دیتا ہے اور پھر_____ بلوغت میں

A.ओळख: जवळीक
A.identity: intimacy
A.شناخت:قربت

B.जवळीक: ओळख
B.intimacy: identity
B.قربت:شناخت

C.जवळीक: मुलभूत विश्वास
C.intimacy: basic trust
C.قربت: بنیادی اعتماد

D.मुलभूत विश्वास: जवळीक
D.basic trust: intimacy
D.بنیادی اعتماد:قربت

Answer: A.ओळख: जवळीक
A.identity: intimacy
A.شناخت:قربت

155 **सूचना:** खालील प्रश्नातील चार पर्यायांपैकी, तीन पर्याय असे आहेत की प्रत्येकातील 3 शब्द एकमेकांशी (A), (B), (C), (D) आणि (E) अशा दिलेल्या 5 पर्यायांपैकी कोणत्याही एका दृष्टीने एकमेकांशी संबंधित आहेत. आणि संबंध दर्शविणारा 1 पर्याय आहे जो खालील आकृतींद्वारा दाखविलेला नाही. ह्या अटीची पूर्तता करणारा संबंध म्हणजे तुमचे उत्तर असेल.

DIRECTION: Out of the four alternatives in each of the following questions, three alternatives are such that the three words in each are related among themselves in one of the five ways represented by (A), (B), (C), (D) and (E) below. And one of the alternatives represents a relationship which is not represented by any of the figures given below. The relationship that complies this condition is your answer.

ہدایت: مندرجہ ذیل سوال میں چار متبادل میں سے، تین متبادل ایسے ہیں کہ ہر ایک میں تین الفاظ آپس میں پانچ طریقوں میں سے ایک میں کے ذریعہ کی گئی ہے۔ اور ایک متبادل ایسے تعلق کی نمائندگی کرتا (A)،(B)،(C)،(D)&(E)متعلق ہیں جن کی نمائندی مندرجہ ذیل ہے جس کی نمائندگی یجے دیے گئے کسی بھی خاکے کے ذریعہ نہیں کی جاتی ہے۔ اس شرط پر پورا اترنے والی شرط آپ کا جواب ہے

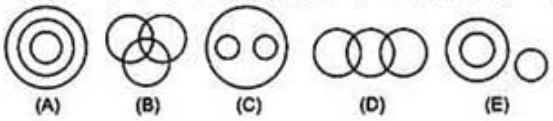

(a) Star, Moon, Mars / तारा, चंद्र, मंगळ/مریخ، چاند، ستارہ

(b) Professor, Scholar, Politician / प्राध्यापक, विद्वान, राजकारणी/سیاست دان، اسکالر، پروفیسر

(c) Nurse, Doctor, Woman / परिचारिका, डॉक्टर, स्त्री/عورت، ڈاکٹر، نرس

(d) Swimmer, Carpenter, Singer / जलतरणपटू, सुतार, गायक/گلوکار، بڑھئی، تیراک

A. (A)

B. (B)

C. (C)

D. (D)

Answer: A. (A)

156 शिक्षक मेधा पाटकर आणि अमृता देवी बिश्नोईच्या बाबतीत शिकवत आहे

A teacher is speaking about the contribution of Medha Patkar and Amrita Devi Bishnoi is teaching about

ایک استاد میدھا پاٹکر اور امریتا دیوی بشنوئی کے حصہ کے بارے میں بات کر رہا ہے ؛ وہ پڑھا رہا ہے

A.जल संवर्धन आंदोलन
A.Water conservation movement
A. پانی کے تحفظ کی تحریک

B.महिला सशक्तीकरण चळवळ
B.Woman empowerment movement
B. عورت کو بااختیار بنانے کی تحریک

C.पर्यावरणीय समस्या
C.Environmental issues
C. ماحولیاتی مسائل

D.यापैकी एकही नाही
D.None of these
D. ان میں سے کوئی بھی نہیں

Answer: C.पर्यावरणीय समस्या
C.Environmental issues
C. ماحولیاتی مسائل

157 आपले विद्यार्थी आजच्या सामाजिक भ्रष्टाचाराचे प्रतिबिंब दिसतात व त्यांना असामाजिक कृत्यात आनंद मिळते. अशा परिस्थितींना मात करण्यासाठी आपण काय कराल?

Our students are having exact mirror-image of the modern society’s corruption and indulge in anti-social acts. What will you do to cope with it in these circumstances?

ہمارے طالب علمجدید معاشرے کی بدعنوانی کا عین مطابق عکس ہیں اور مخالف سماجی عمل میں ملوث ہیں۔ ان حالتوں میں اس سے نمٹنے کے لئے آپ کیا کریں گے؟

A.आपण मोठे समाज सुधारक बनण्याचे प्रयत्न करू
A.You will attempt to emerge as a big political reformer
A. آپ ایک بڑا سیاسی اصلاح کار بننے کی کوشش کریں گے

B.आपण त्यांना अश्या कृत्यांपासून दूर ठेवण्याचे प्रयत्न करू
B.You will try to keep them away from such maladies
B. آپ ان کو اس طرح کی خرابی سے دور رکھنے کی کوشش کریں گے

C.आपण त्यांना अनुशासनात्मक नियमांद्वारे नियंत्रण मध्ये ठेवू
C.You will control them through disciplinary rules
C.آپ ان کو نظم و ضبط کے قوانین کے ذریعے کنٹرول کریں گے

D.त्यांना शिकवण्याआधी, स्वत:ला आयुष्यात एक आदर्श शिक्षक बनवणार.
D.Before giving them lessons, make your personal life to emerge as an ideal teacher.
D.سبق دینے سے پہلے، اپنی ذاتی زندگی کو ایک مثالی استاد کے طور پر بنائیں.

Answer: D.त्यांना शिकवण्याआधी, स्वत:ला आयुष्यात एक आदर्श शिक्षक बनवणार.
D.Before giving them lessons, make your personal life to emerge as an ideal teacher.
D.سبق دینے سے پہلے، اپنی ذاتی زندگی کو ایک مثالی استاد کے طور پر بنائیں.

158 निर्देश: खालील शब्दांची इंग्रजी शब्दकोशानुसार मांडणी करा.
(a) Brook
(b) Bandit
(c) Boisterous
(d) Baffle
(e) Bright

DIRECTIONS: Arrange the following words according to the English dictionary.
(a) Brook
(b) Bandit
(c) Boisterous
(d) Baffle
(e) Bright

ہدایت: انگریزی لغت کے مطابق مندرجہ ذیل الفاظ کو مرتب کریں۔

Brook (a)
Bandit (b)
Boisterous (c)
Baffle (d)
Bright(d)

A.(b), (d), (c), (a), (e)
A.(b), (d), (c), (a), (e)
A.(b), (d), (c), (a), (e)

B.(b), (d), (c), (e), (a)
B.(b), (d), (c), (e), (a)
B.(b), (d), (c), (e), (a)

For More Info And Videos About TAIT-Exam Syllabus And Other Exam Visit My Channel
TAIT च्या 30 प्रश्नपत्रिका PDF
BADSHAHimp Available Request 9765226781
WWW.YouTube.com/BADSHAHimp
Subscribe My Channel

	C.(d), (b), (c), (a), (e) C.(d), (b), (c), (a), (e) C.(d), (b), (c), (a), (e)	
	D.(d), (b), (c), (e), (a) D.(d), (b), (c), (e), (a) D.(d), (b), (c), (e), (a)	
Answer:	D.(d), (b), (c), (e), (a) D.(d), (b), (c), (e), (a) D.(d), (b), (c), (e), (a)	
159		$3^2 \times 9^2 = 3^? \times 9$ $3^2 \times 9^2 = 3^? \times 9$ $3^2 \times 9^2 = 3^? \times 9$
		A.4 A.4 A.4
		B.3 B.3 B.3
		C.6 C.6 C.6
		D.2 D.2 D.2
Answer:		A.4 A.4 A.4

For More Info And Videos About TAIT-Exam Syllabus And Other Exam Visit My Channel
TAIT च्या 30 प्रश्नपत्रिका PDF
BADSHAHimp Available Request 9765226781
WWW.YouTube.com/BADSHAHimp
Subscribe My Channel

160 जर K याचा अर्थ '+', S याचा अर्थ '−', T याचा अर्थ '×' आणि P याचा अर्थ '÷'तर 12 T 10 K 16 P 4 बरोबर:

If K stands for '+', S stands for '−', T stands for '×' and P stands for '÷' then 12 T 10 K 16 P 4 is equal to:

اگر 'K' + کے قائل مقام ہو S '-' کے قائم مقام پر ہو، T 'X' اور P '÷' کے قائم مقام پر تو 12 T 10 K 16 P 4کس کے برابرہوں گے

A. 120

B. 34

C. 124

D. 123

Answer: C. 124

161 एका घनाला रंगवून किमान शक्य संख्येचे काप करून 125 लहान पण एकसारख्या तुकड्यांमध्ये कापले गेले आहे. घन कापण्यासाठी आवश्यक असलेल्या कापांची किमान संख्या काय आहे ?

A cube is painted and cut into 125 smaller but identical pieces by making the minimum possible number of cuts. What is the minimum number of cuts required to cut a cube?

کیووب کو رنگ دے کر 125 ایک جیسے چھوٹے ٹکڑوں میں کاٹا گیا ہے۔ کم سے کم ممکن کٹ لگاتے ہوئے, کیوب کو کاٹنے کے لئے کم سے کم کتنے کاٹ کی ضرورت پڑے گی؟

A.12
A.12
A.12

B.8
B.8
B.8

C.6
C.6
C.6

D.10
D.10
D.10

Answer: A.12
A.12
A.12

162	स्तुती करणारा -
	A.शाहीर
	B.भक्त
	C.निंदक
	D.भाट
Answer:	D.भाट

163	शिक्षकाने वर्गात शैक्षणिक उपाययोजना अंमलात आनण्यासाठी खालीलपैकी कोणत्या तत्वाचे पालन करावे? Which of the following principle should be followed by a teacher in the class during application of teaching aids? کلاس میں ٹیچنگ ایڈز کے اطلاق کے دوران ایک استاد کو مندرجہ ذیل اصول کی پیروی کرنی چاہئے؟
	A.इच्छित विद्यार्थ्यांचा सक्रीय सहभाग A.Active participation of the student desired A.مطلوب طلباء کی فعال شرکت
	B.विद्यार्थ्यांचा आनंद लक्षात ठेवावा B.Enjoyment of the students should be kept in mind B.طالب علموں کا لطف ذہن میں رکھنا چاہئے
	C.उपाययोजनेच्या दरम्यान मुल्यांकन केले जाऊ शकत नाही C.Evaluation does not carry out during application C.اطلاق کے دوران تشخیص نہیں ہونی چاہیئے
	D.वरीलपैकी एक हि नाही D.None of the above D.اوپر میں سے کوئی نہیں
Answer:	A.इच्छित विद्यार्थ्यांचा सक्रीय सहभाग A.Active participation of the student desired A.مطلوب طلباء کی فعال شرکت

164 एखाद्याला प्राथमिकपणे त्याच्याबद्दलची असलेली चिंता जाणवणे या अभिमुखतेला म्हणतात

An orientation in which one feels primarily concerned with one self

ایسا رجحان جس میں کوئی شخص یہ محسوس کرتا ہے اُسے بنیادی طور پر صرف اپنے آپ سے سروکار رکھنا چاہیے_____ کہلاتا ہے -

A.सामाजिक स्वत्व
A.Social self
A.سماجی عرفان

B.आत्म गर्व
B.Self pride
B.خود پسندی

C.व्यक्तीगत स्वत्व
C.Personal self
C.عرفانِ ذات (Personal self)

D.संबंधित स्वत्व
D.Relational self
D.اقربا دانی(سوشل سیلف)

Answer: C.व्यक्तीगत स्वत्व
C.Personal self
C.عرفانِ ذات (Personal self)

165 सूचना: खाली दिलेल्या प्रश्नात एक विधान आहे ज्याचे I आणि II असे दोन निष्कर्ष त्याखाली अंकित केलेले आहेत. या आधारे सर्वात योग्य पर्याय निवडा.

विधान:
भारत सरकारने उत्पन्न वाढवण्यासाठी सोन्यावरील उत्पादन शुल्क वाढवले आहे.

निष्कर्ष:
I. भारत सरकार आर्थिक संकटात आहे.
II. भारत सरकार त्यावर असलेले कर्ज फेडण्यास असमर्थ आहे.

DIRECTIONS: The question below has a statement followed by two conclusions numbered I and II. Based on this choose the option that is most suitable.

Statement:
Government of India has increased excise duty on Gold for increasing its income.

Conclusions:
I. Government of India is in financial crisis.
II. Government of India is unable to pay its loans.

ہدایات: نیچے دیے گئے سوال میں ایک بیان کے بعد دو نتائج دیے گئے ہیں۔ اس کی بنیاد پرانتہائی موزوں آپشن کا انتخاب کیجیے۔ I اور II

بیان:
سونے کی آمدنی میں اضافے کے لئے انڈیا کی حکومت نے سونے کی ایکسائز ڈیوٹی میں اضافہ کر دیا ہے.

نتیجے:
I. انڈیا کی حکومت مالی بحران میں ہے.
II. انڈیا کی حکومت اپنے قرضوں کو ادا کرنے سے قاصر ہے.

A.केवळ निष्कर्ष क्रमांक I विधानास अनुसरून आहे
A.Only Conclusion I follows
A. صرف نتیجہ I لاگو ہو گا۔

B.केवळ निष्कर्ष क्रमांक II विधानास अनुसरून आ
B.Only Conclusions II follows
B. صرف نتیجہ II لاگو ہو گا۔

C.निष्कर्ष क्रमांक I किंवा II अनुसरून आहे
C.Either I or II follows
C. I یا II میں سے ایک لاگو ہو گا۔

D.कोणताही निष्कर्ष अनुसरून नाही
D.Neither I nor II follow
D. I اور II میں سے کوئی بھی لاگو نہیں ہو گا۔

Answer: D.कोणताही निष्कर्ष अनुसरून नाही
D.Neither I nor II follow
D. I اور II میں سے کوئی بھی لاگو نہیں ہو گا۔

166 व्यक्तिमत्त्व हा शब्द "पर्सोना" या शब्दावरून आलेला आहे ज्याचा अर्थ असा होतो

Personality comes from the word “persona” which means

پرسنالٹی لفظ "پرسونا" سے ماخوز ہے جس کا مطلب ہوتا ہے

A.नाटकीय मुखवटा
A.Theatrical mask
A.تصنع کا حلیہ

B.आत्मा
B.Soul
B.روح

C.स्व
C.Self
C.خود

D.वरीलपैकी कोणतेही नाही
D.none of the above
D.درج بالا میں سے کوئی نہیں

Answer: A.नाटकीय मुखवटा
A.Theatrical mask
A.تصنع کا حلیہ

167 Out of the four alternatives, choose the one which can be substituted for the given words/sentence.
An animal that lives by killing and eating other animals

A.Predator

B.Amphibian

C.Quadruped

D.Biped

Answer: A.Predator

168 मिथिलेशला तीन वर्षांनंतर एकूण किती रक्कम मिळेल, जर त्याने रू. 11,200 एवढी रक्कम अशा योजनेत गुंतवली जी तीन वर्षांसाठी दसादशे 8.5 दराने सरळ व्याज प्रदान करते?

What total amount would Mithilesh get at the end of three years, if he invests an amount of Rs.11,200 in a scheme which offers simple interest at the rate of 8.5 p. c. p. a. for three years?

اگر متھلیش ایک رقم 11200 روپیہ ایک ایسی اسکیم میں لگاتا ہے جو 8.5٪ سالانہ کی در سے تین سال کے لیئے سود مفرد پیش کرتی ہے تو وہ تین سال پورا ہونے پر کتنی مجموعی رقم حاصل کرتا ہے؟

A.रू. 14,056
A.Rs.14,056
A. 14,056 روپیہ

B.रू. 14,348
B.Rs.14,348
B. 14,348 روپیہ

C.रू. 13,852
C.Rs.13,852
C. 13,852 روپیہ

D.रू. 15,064
D.Rs.15,064
D. 15,064 روپیہ

Answer: A.रू. 14,056
A.Rs.14,056
A. 14,056 روپیہ

169 दिलेली अदलाबदल : चिन्हे + आणि ÷, तसेच आकडे 6 आणि 4 ; तर 6 + 2 x 7 ÷ 4 – 3 चे मूल्य किती ?

Given interchanges: signs + and ÷, and numbers 6 and 4; then the value of 6 + 2 × 7 ÷ 4 - 3 is

دیئے گئے تبادلے: علامات + اور ÷، اور نمبر 6 اور 4؛ تو 6 + 2× 7÷ 4 - 3کی تعداد ہے

A.2
A.2
A.2

B.17
B.17
B.17

C.8
C.8
C.8

D.15
D.15
D.15

Answer: B.17
B.17
B.17

170 यापैकी कोणती आकृती कबूतर, पक्षी आणि कुत्रे यांच्या दरम्यानचे नाते सर्वोत्तम दर्शवते?

Which one of the following diagrams best depicts the relationship among Pigeons, Birds and Dogs?

مندرجہ ذیل میں سے کون سی ڈایاگرام کبوتروں، پرندوں اور کتوں کے درمیان تعلقات کو بہتر انداز میں پیش کرتی ہے؟

(A) 

(B) 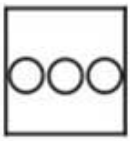

(C) 

(D) 

Answer: (A) 

171 चौकोनाच्या बाजू दुप्पट करण्यात आल्या. त्यांचे क्षेत्रफळ किती टक्क्यांनी वाढेल?

The sides of a square are doubled. By how much percentage does its area increase?

ایک مربع کی طرفیں دوگنی ہوجاتی ہیں۔ اسکا رقبہ کتنا فی صد بڑھتا ہے

A.400%
A.400%
A.400%

B.300%
B.300%
B.300%

C.200%
C.200%
C.200%

D.225%
D.225%
D.225%

Answer: B.300%
B.300%
B.300%

172 20 मीटर कापडाची विक्री करून, व्यक्तीला 4 मीटर कापडाची विक्री किंमत मिळते. नफ्याची टक्केवारी काय आहे:

By selling 20 metres of cloth, a man gains the selling price of 4 metres of cloth. The profit per cent is:

20 میٹر کپڑا فروخت کرنے سے، ایک شخص 4 میٹر کپڑے کی فروخت کی قیمت حاصل کرتا ہے. منافع فی صد ہے:

A.20%
A.20%
A.20%

B.25%
B.25%
B.25%

C.30%
C.30%
C.30%

D.35%
D.35%
D.35%

Answer: B.25%
B.25%
B.25%

173 सूचना: खाली दिलेल्या विधान (A) आणि कारण (R) साठी, खालील पैकी योग्य पर्याय निवडा:

विधान (A): मास्यांना जगण्यासाठी ऑक्सिजनची आवश्यकता नाही.
कारण (R): महासागरांमध्ये ऑक्सिजन नसतो.

DIRECTION: For the Assertion (A) and Reason (R) given below, choose the correct alternative from the following:

Assertion (A): Fish do not need oxygen for survival.
Reason (R): There is no oxygen in oceans.

ہدایت: نیچے دئیے گئے اسرشن (A) اور وجہ (R) کے لئے، مندرجہ ذیل میں سے صحیح متبادل منتخب کریں:

اسرشن (A): مچھلیوں کو زندہ رہنے کے لئے آکسیجن کی ضرورت نہیں ہے.
وجہ (R): سمندر میں کوئی آکسیجن نہیں ہوتی ہے۔

A.दोन्ही (A) आणि (R) सत्य आहेत आणि (R) (A) च योग्य स्पष्टीकरण आहे
A.Both (A) and (R) are true and (R) is the correct explanation of (A)
A. (A) اور (R) دونوں صحیح ہیں اور (R) (A) کی درست وضاحت ہے

B.दोन्ही (A) आणि (R) खरे आहेत, परंतु (R) (A) च योग्य स्पष्टीकरण नाही
B.Both (A) and (R) are true, but (R) is not the correct explanation of (A)
B. (A) اور (R) دونوں صحیح ہیں، لیکن (R) (A) کی درست وضاحت نہیں ہے

C.(A) सत्य आहे, परंतु (R) खोटे आहे
C.(A) is true, but (R) is false
C. (A) صحیح ہے، لیکن (R) غلط ہے

D.दोन्ही (A) आणि (R) खोटे आहेत
D.Both (A) and (R) are false
D. (A) اور (R) دونوں غلط ہیں

Answer: D.दोन्ही (A) आणि (R) खोटे आहेत
D.Both (A) and (R) are false
D. (A) اور (R) دونوں غلط ہیں

174 Out of the given options, choose the most appropriate one to fill in the blank.
The singer_____from humble origins to become one of the most successful entertainers of all time.

A.has risen

B.have rise

C.has rise

D.have rose

Answer: A.has risen

175 महात्मा गांधींचे "करा किंवा मरा" हे बोधवाक्य _____ साठी लोकांमध्ये चेतना आणण्यासाठी होते

Mahatma Gandhi's 'Do or Die' call was to galvanise people for the –

کرو یا مرو کے نارے کے ذریعہ مہاتما گاندھی نے لوگوں کو تیار کیا۔

A.असहकार चळवळ
A.Non –cooperation movement
A.عدم تعاون کی تحریک (Non Co operation Movement) کے لیے

B.दांडी यात्रा
B.Dandi March
B.ڈانڈی مارچ کے لیے

C.भारत छोडो चळवळ
C.Quit India Movement
C.بھارت چھوڑو تحریک کے لیے

D.सरळ कारवाईची चळवळ
D.Direct Action Movement
D.براہ راست کارروائی تحریک (direct Action Movement) کے لیے

Answer: C.भारत छोडो चळवळ
C.Quit India Movement
C.بھارت چھوڑو تحریک کے لیے

176 विशिष्ट समुहाच्या व्यक्तीच्या सदस्यत्वावर आधारित दोन किंवा अधिक व्यक्तींमध्ये फरक करणे म्हणजे

Distinction between two or more persons on the basis of person's membership of a particular group

کسی خاص گروپ کی ممبر کی بنیاد پر دو یا دو سے زائد اشخاص کے مابین _____ کا فرق ہے۔

A.जातवाद
A.Casteism
A.ذات پات

B.प्रसार
B.Diffusion
B.پھیلاؤ، انتشار

C.भेदभाव
C.Discrimination
C.بھید بھاؤ

D.ओळख
D.Identification
D.شناخت

Answer: C.भेदभाव
C.Discrimination
C.بھید بھاؤ

177 मानसिक क्षमतेत समाविष्ट आहे-

The mental abilities include—

ذہنی صلاحیتوں میں شامل ہیں-

A.स्मरणशक्ती, तर्क, विचार व निर्मितीक्षम
A.Memory, Reasoning, Thinking and Creativity
A.یاداشت، منطق، سوچ اور تخلیقی

B.आवड, लक्ष आणि भावना
B.Interest, Attention and Feelings
B.دلچسپی، توجہ اور احساسات

C.गतिशीलता
C.Dynamism
C.تحرک

D.सायको- मोटर क्षमता
D.Psycho-motor Abilities
D.نفسیاتی- موٹر صلاحیتیں

Answer: A.स्मरणशक्ती, तर्क, विचार व निर्मितीक्षम
A.Memory, Reasoning, Thinking and Creativity
A.یاداشت، منطق، سوچ اور تخلیقی

178	प्रश्नासाठी सूचना: खालील मालिका पूर्ण करा. 1B1, 2D2, 3F3, 4H4, _____ DIRECTION: Complete the following series. 1B1, 2D2, 3F3, 4H4, _____ سوال کے لیے ہدایت:مندرجہ ذیل سیریز کو مکمل کریں۔ 1B1, 2D2, 3F3, 4H4, _____
	A.316 A.316 A.316
	B.613 B.613 B.613
	C.4J6 C.4J6 C.4J6
	D.5J5 D.5J5 D.5J5
Answer:	D.5J5 D.5J5 D.5J5

179	$\frac{(8)^2 - (3)^2}{8 - 3} = ?$
	A. 11
	B. 12
	C. 13
	D. 14
Answer:	A. 11

180 सूचना: प्रत्येक प्रश्नाला एक प्रमुख विधानासोबत चार विधाने आहेत ज्यांच्याखाली A, B, C आणि D असे चार विधान आहेत. क्रमवार विधानांची जोडी निवडा ज्यामध्ये प्रथम विधान दुसऱ्या विधानाला सुचवते, आणि दोन्ही विधाने तर्किकदृष्ट्या प्रमुख विधानासोबत निगडित असेल.

माझी आई नाश्त्याला एकतर सँडविच करत आहे किंवा पेन केक्स करत आहे.
A. माझ्या आईने नाश्त्याला सँडविच केले.
B. माझ्या आईने नाश्त्याला सँडविच केले नाही.
C. माझ्या आईने नाश्त्याला पेन केक केले.
D. माझ्या आईने नाश्त्याला पेन केक केले नाही.

DIRECTIONS: Each question has a main statement followed by four statements labelled A, B, C and D. Choose the ordered pair of statements, where the first statement implies the second, and the two statements are logically consistent with the main statement.

My mother cooks either sandwich or pan cakes for the breakfast.
A.My mother cooked sandwich for the breakfast.
B.My mother did not cook sandwich for the breakfast.
C.My mother cooked pan cakes for the breakfast.
D.My mother did not cook pan cakes for the breakfast.

ہدایت: ہر سوال میں ایک جملہ ہے جسکے بعد چار جملےاے، بی،سی اور ڈی کے نام سے دئے گئے ہیں اسمیں منسلک جوڑیوں کو چنئے۔ جہاں پہلا جملہ دوسرے جملہ کی اور اشارہ کر رہا ہے اور دو جملے منطقی مرکزی بیان کے مطابق ہیں

میری امی ناشتے میں یا سینڈوچ بناتی ہیں یا پین کیک
A۔ میری امی نے ناشتے میں سینڈوچ بنائے
B۔ میری امی نے ناشتے میں سینڈوچ نہیں بنائے
C۔ میری امی نے ناشتے میں پین کیک بنائے
D۔ میری امی نے ناشتے میں پین کیک نہیں بنائے

A.BD
A.BD
A.BD

B.DA
B.DA
B.DA

C.CB
C.CB
C.CB

D.AC
D.AC
D.AC

Answer: B.DA
B.DA
B.DA

181 जर 'A' हा B च्या मुलाच्या मुलाचा भाऊ आहे. 'A' चे 'B' सोबत नाते काय आहे?

If 'A' is the brother of the son of B's son. How is 'A' related to 'B'?

اگر 'A' 'B' کے بیٹے کا بھائی ہے. 'A' کا 'B' سے کیا رشتہ ہے؟

A.भाऊ
A.Brother
A.بھائی

B.चुलत भाऊ
B.Cousin
B.چچا زاد

C.काक
C.Uncle
C.چچا

D.नातू
D.Grandson
D.پوتا

Answer: D.नातू
D.Grandson
D.پوتا

182 मालिकेचा मध्यक काढा:
30, 60, 70

Find the median for the series:
30, 60, 70

دئے ہوئے اعداد کا اوسط (میڈین) ہوگا
30, 60, 70

A.50
A.50
A.50

B.55
B.55
B.55

C.60
C.60
C.60

D.40
D.40
D.40

Answer: C.60
C.60
C.60

183 साबरमती नदी मुख्यत: येथे वाहाते

Sabarmati River majorly flows in

سابرمتی دریا زیادہ تر بہتی ہے

A.गुजराथ
A.Gujarat
A.گجرات

B.दिल्ली
B.Delhi
B.دہلی

C.एम.पी.
C.M.P.
C.ایم۔ پی

D.यु.पी
D.U.P.
D.یو۔ پی

Answer: A.गुजराथ
A.Gujarat
A.گجرات

184 मुलांच्या रांगेत बॉब डावीकडून पाचव्या स्थानावर तर उजव्या टोकाकडून सोळाव्या स्थानावर आहे. तर रांगेत मुले किती ?

Bob is fifth from the left and is sixteenth from the right end in a row of children. How many children are there in the row?

باب بھانیں سے پانچوہ ہے اور پیٹر بچھوں کی کتار میں دھانیں طرف سے سولوہ ہے. کتار میں کتنے بچھے ہے؟

A.21
A.21
A.21

B.22
B.22
B.22

C.23
C.23
C.23

D.20
D.20
D.20

Answer: D.20
D.20
D.20

185 एका विशिष्ट सांकेतिक भाषेमध्ये, जर BUG = 90 आणि ALMS = 180 असा कूटबध्द केला जात असेल, CADET?

In a certain code language, if BUG = 90 and ALMS = 180, then CADET?

ایک مخصوص ضابطے کی زبان میں، اگر BUG = 90 اور ALMS = 180 تو CADET؟

A.153
A.153
A.153

B.165
B.165
B.165

C.175
C.175
C.175

D.148
D.148
D.148

Answer: B.165
B.165
B.165

186 सूचना: अर्थपूर्ण परिच्छेद निर्माण करण्यासाठी, खाली दिलेली (P), (Q) (R), (S) आणि (T) ही पाच वाक्ये योग्य अनुक्रमाने पुनर्रचना करा; त्यांनतर खालील प्रश्नांची उत्तर द्या.

P. कुत्रा लोभी बनला आणि त्याने तो तुकडा मिळवायचे ठरविले.
Q. घरी चालत जाताना त्याला एका झऱ्यावरील पूल ओलांडावा लागत होता.
R. त्याने प्रतिबिंबाकडे झोकून दिले आणि त्याने तोंड उघडल्याबरोबर तो मांसाचा तुकडा पाण्यात पडला आणि अदृश्य झाला.
S. एके दिवशी, एका कुत्र्याने एका मांसाचा तुकडा पहिला.
T. तो जात असताना, त्याने स्वतःचे प्रतिबिंब पाण्यात पहिले आणि दुसरा एक कुत्रा मांसाचा तुकडा घेऊन जात असल्याचा त्याने विचार केला.

पुनर्रचना केल्यानंतर खालीलपैकी कोणते वाक्य पाचवे असेल?

DIRECTION: Rearrange the following five sentences (P), (Q), (R), (S) and (T) in the proper sequence to form a meaningful paragraph; then answer the questions given below them.
P. The dog got greedy and decided to have that piece as well.
Q. As it walked home, it had to cross a bridge over a stream.
R. He snapped at the reflection, and as soon as he opened his mouth, his piece of meat fell into the water and disappeared.
S. A dog found a piece of meat one day.
T. As it walked, it saw its reflection in the water and thought it was another dog with a piece of meat.

Which of the following should be the FIFTH sentence after rearrangement?

ہدایات: ان پانچ جملوں (P)، (Q)، (R)، (S) اور (T) کو با معنی پیرا بنانے کے لئے دوبارہ ترتیب دیجئے، پھر نیچے دے گئے سوالوں کے جواب دیجئے

P. کتے کو لالچ ہوا ہار وو بھی وو ٹکڑا چاہتا تھا.
Q. جب وو گھر کی طرف نکلا ،اسکو ندی کے اپر پل سے گزر نا تھا.
R. وو چھایا پی بونکھا، اور جونہہی اسنے اپنا منہ کھولا، گوشت کہ ٹکڑا پانی میں گر گیا اور کھو گیا.
S. ایک دن کتے کو گوشت کہ ٹکڑا ملا.
T. جب وو چلا، اسنے پانی میں پرچھائی دیکھی اور سونچا یہ دوسرا کتا ہے گوشت کہ ٹکڑا لیکے.

دوبارہ ترییب دینے کے بعد کون سا جملہ پانچوہ ہونا چاہیے؟

A.R
A.R
A.R

B.P
B.P
B.P

C.S
C.S
C.S

D.T
D.T
D.T

Answer: A.R
A.R
A.R

187 दूरदृष्टीतेने पिडित व्यक्तीचा जवळचा बिंदू —

The Near Point for Long sightedness defected person is—

__نزدیکی بصارت کی خرابی والے فرد کا قریبی پوائنٹ ہوتا ہے

A.25सें मीपेक्षा अधिक
A.More than 25cm
A.25 سنٹی میٹر سے زیادہ

B.50 सें मीपेक्षा अधिक
B.More than 50cm
B.50 سٹی میٹر سے زیادہ

C.25 सें मीपेक्षा कमी
C.Less than 25 cm
C.25 سنٹی میٹر سے کم

D.अगणित
D.Infinite
D.لامحدود

Answer: A.25सें मीपेक्षा अधिक
A.More than 25cm
A.25 سنٹی میٹر سے زیادہ

188 युगेन्सन लिंगदोह याच्याशी संबंधित आहेत

Eugensen Lyngdoh is associated with

یوجین سین لینگڈوہ جڑے ہوئے ہیں۔

A.फुटबॉल
A.Football
A.فٹبال سے

B.बास्केटबॉल
B.Basketball
B.باسکیٹ بال سے

C.व्हॉलीबॉल
C.Volley ball
C.والی بال سے

D.हॉकी
D.Hockey
D.ہاکی سے

Answer: A.फुटबॉल
A.Football
A.فٹبال سے

189 जेव्हा व्यक्तीला धुर, अग्नी आहाराचा ते वास्तवात अस्तित्वात नसतांना वास येतो त्याला म्हणतात

When a patient smell's of smoke, fire food when these do not exist in really is called

جب کوئی مریض دھوئیں ، آگ یا کھانے کی بو محسوس کرتا ہے جبکہ وہ حقیقت میں نہیں ہوتی تو اسے کہا جاتا ہے:

A.घ्राणेंद्रिय आभास
A.Olfactory hallucination
A.قوت شامہ واہمہ

B.स्पर्शयोग्य आभास
B.Tactile hallucination
B.محسوس کیا جانے والا واہمہ

C.श्रवण आभास
C.Auditory hallucination
C.سمعی واہمہ

D.यापैकी एकही नाही
D.None of these
D.ان میں سے کوئی نہیں

Answer: A.घ्राणेंद्रिय आभास
A.Olfactory hallucination
A.قوت شامہ واہمہ

For More Info And Videos About TAIT-Exam Syllabus And Other Exam Visit My Channel
TAIT च्या 30 प्रश्नपत्रिका PDF
BADSHAHimp Available Request 9765226781
WWW.YouTube.com/BADSHAHimp
Subscribe My Channel

190 सूचना: या प्रत्येक प्रश्नांमध्ये तुम्हाला A आणि B अशी दोन विधाने दिलेली आहे आणि (I) आणि (II) असे दोन निष्कर्ष दिलेले आहेत. सामान्यपणे माहीत असलेल्या तथ्यांशी जुळत नसले तरी खालील दोन विधाने बरोबर आहेत असे समजा. खालीलपैकी कोणते निष्कर्ष दिलेल्या वाक्यांना संपूर्णपणे लागू आहे ते ठरवा.
निवेदन:
A: सर्व फुले पाने आहेत.
B: काही पाने पक्षी आहेत.
निष्कर्ष:
I: काही पक्षी फुले आहेत.
II: काही पाने फुले आहेत.

DIRECTION: In each of these questions, you are given two statements A and B followed by two conclusions (I) and (II). You have to take the two statements to be true even if they seem to be at variance from commonly known facts. You are to decide which of the given conclusions definitely follows from the given statements.

Statements:
A: All flowers are leaves.
B: Some leaves are birds.

Conclusions:
I: Some birds are flowers.
II: Some leaves are flowers.

ہدایت:ان سوالوں میں سے ہر ایک میں، آپ کو دو بیانات A اور B دیے گئے ہیں جن کے بعد دو نتائج (I) اور (II) دیے گئے ہیں۔ آپ کو دونوں بیانات کو درست تسلیم کرنا ہے اگرچہ وہ عام طور پر معلوم حقائق کے برعکس نظر آتے ہوں۔ آپ کو فیصلہ کرنا ہے کہ دیے گئے نتائج میں سے کون یقینی طور پر دیے گئے بیانات کی پیروی کرتا ہے۔

بیانات:
A: سبھی پھول پتیاں ہیں۔
B: کچھ پتیاں چڑیاں ہیں۔

حل:
I: کچھ چڑیاں پھول ہیں۔
II. کچھ پتیاں پھول ہیں۔

A.जर केवळ निष्कर्ष I निघत असल्यास.
A.If only conclusion I follows
A.صرف نتیجہ I پیروی کرتا ہے۔

B.जर केवळ निष्कर्ष II निघत असल्यास.
B.If only conclusion II follows
B.صرف نتیجہ II پیروی کرتا ہے۔

C.जर दोन्ही निष्कर्ष I आणि II निघत असल्यास.
C.If both I and II follow
C.دونوں I اور II پیروی کرتے ہیں۔

For More Info And Videos About TAIT-Exam Syllabus And Other Exam Visit My Channel
TAIT च्या 30 प्रश्नपत्रिका PDF
BADSHAHimp Available Request 9765226781
WWW.YouTube.com/BADSHAHimp
Subscribe My Channel

D.जर दोन्ही निष्कर्ष I आणि II निघत नसल्यास.
D.If neither I nor II follows
D.نہ تو I نہ ہی II پیروی کرتا ہے۔

Answer: B.जर केवळ निष्कर्ष II निघत असल्यास.
B.If only conclusion II follows
B.صرف نتیجہ II پیروی کرتا ہے۔

191 सूचना: यांपैकी प्रत्येक प्रश्नात अक्षरे, शब्द किंवा संख्यांचे चार समूह देण्यात आलेले आहेत.

त्यांपैकी वेगळे ते निवडा.

DIRECTIONS: In each of the questions, four groups of letters, words or numbers are given.

Find the odd one out.

سمت: ہر سوال میں، حروف، الفاظ یا اعداد کے چار گروپ دیے گئے ہیں۔
بے جوڑ کو تلاش کریں۔

A.93751
A.93751
A.93751

B.51379
B.51379
B.51379

C.78526
C.78526
C.78526

D.73519
D.73519
D.73519

Answer: C.78526
C.78526
C.78526

For More Info And Videos About TAIT-Exam Syllabus And Other Exam Visit My Channel
TAIT च्या 30 प्रश्नपत्रिका PDF
BADSHAHimp Available Request 9765226781
WWW.YouTube.com/BADSHAHimp
Subscribe My Channel

192 विधान:
५० करोड रुपये प्रशिक्षणावर खर्च करून सुद्धा भारतीय फुटबॉल संघाने विश्वचषक 2015 चे विजेतेपद मिळविण्यास अयशस्वी ठरविले

कृतीचा कोर्स:
I. निधीचा गैरफायदा घेण्याबाबत शोधून काढण्यासाठी एक समिती स्थापन करावी.
II. संघाचे सर्व सदस्यांचे नवीन सदस्य घेण्यात यावे.

Statement:
Indian football team failed to win World Cup 2015 even after spending more than INR 50 crore on training.
Course of actions:
I. A committee should be set up for finding out about miss appropriation of funds.
II. All the members of the team should be replaced by new members.

بیان:
انڈین فٹبال ٹیم ٹریننگ پر 50 کروڑ انڈین روپے خرچ کے بعد بھی ورلڈ کپ 2015 میں نہیں جیت سکی۔

لائحہ عمل:
I۔فنڈز کے غلط استعمال کا پتہ لگانے کے لیے ایک کمیٹی قائم کی جانی چاہیے
II۔ ٹیم کے تمام ارکان کو نئے ارکان سے تبدیل کر دینا چاہیے ۔

A.फक्त I अनुसरून आहे
A.Only I follows
A. صرف I لاگو ہو گا۔

B.फक्त II अनुसरण करते आहे
B.Only II follows
B. صرف II لاگو ہو گا۔

C.एकतर I किंवा II अनुसरून आहे
C.Either I or II follows
C. I یا II میں سے ایک لاگو ہو گا۔

D.I किंवा II दोन्हीपैकी काहीही अनुसरण करत नाही
D.Neither I nor II follows
D. I اور II میں سے کوئی بھی لاگو نہیں ہو گا۔

Answer: D.I किंवा II दोन्हीपैकी काहीही अनुसरण करत नाही
D.Neither I nor II follows
D. I اور II میں سے کوئی بھی لاگو نہیں ہو گا۔

For More Info And Videos About TAIT-Exam Syllabus And Other Exam Visit My Channel
TAIT च्या 30 प्रश्नपत्रिका PDF Available Request 9765226781 BADSHAHimp
WWW.YouTube.com/BADSHAHimp Subscribe My Channel

193 सूचना: खालील प्रत्येक प्रश्नात, दोन किंवा तीन विधाने दिली आहेत, ज्यांच्यानंतर चार निष्कर्ष आहेत ज्यांना I, II, III आणि IV अंक दिले आहेत. सर्वसामान्यपणे ज्ञात असलेल्या तथ्यांशी विसंगती आढळत असली तरीही, हे सत्य असल्याचे तात्पुरते मानून, दिलेले कोणते निष्कर्ष तर्कशुद्धपणे दिलेल्या विधानांचे अनुसरण करतात ते ठरवा .
विधाने :
कोणताही मारेकरी स्वेटर नसतो.
कोणतेही जॅकेट स्वेटर नसतो.
काही जॅकेट गुलाब असतात.
निष्कर्ष:
I. काही गुलाब स्वेटर असतात.
II. काही गुलाब स्वेटर नसतात.
III. कोणताही मारेकरी जॅकेट नसतो.
IV काही जॅकेट मारेकरी असतात.

DIRECTION: In each of the questions below, there are two or three statements followed by four conclusions numbered I, II, III and IV. You have to take the given statements to be true even if they seem to be at variance with commonly known facts and then decide which of the given conclusions logically follow(s) from the given statements.

Statements:
No killer is a sweater.
No jacket is a sweater.
Some jackets are roses.

Conclusions:
I. Some roses are sweaters.
II. Some roses are not sweaters.
III. No killer is a jacket.
IV Some jackets are killers.

ہدایت:مندرجہ ذیل سوالات میں سے ہر ایک میں، دو یا تین بیانات دیے گئے ہیں جن کے بعد چار نتائج نمبر I، II، III اور IV دیے گئے ہیں۔ آپ کو دیے گئے بیانات کو درست تسلیم کرنا ہے اگرچہ وہ عام طور پر معلوم حقائق کے برعکس نظر آتے ہوں اور پھر فیصلہ کریں کہ دیے گئے نتائج میں سے کون منطقی طور پر دیے گئے بیانات کی پیروی کرتے ہیں۔

بیانات:
کوئی کلر سویٹر نہیں ہے۔
کوئی جیکٹ سویٹر نہیں ہے۔
کچھ جیکٹ گلاب ہیں۔

حل:
I. کچھ گلاب سویٹر ہیں۔
II. کچھ گلاب سویٹر نہیں ہیں۔
III. کوئی کلر جیکٹ نہیں ہے۔
IV کچھ جیکٹ کلر ہیں۔

A.एकतर I किंवा II आणि III निघत असल्यास.
A.Either I or II and III follow
A.یا تو I یا II اور III پیروی کرتے ہیں

For More Info And Videos About TAIT-Exam Syllabus And Other Exam Visit My Channel
TAIT च्या 30 प्रश्नपत्रिका PDF
BADSHAHimp Available Request 9765226781
YouTube WWW.YouTube.com/BADSHAHimp
Subscribe My Channel

B.एकतर III किंवा IV आणि II निघत असल्यास.
B.Either III or IV and II follow
B.یا تو III یا IV اور II پیروی کرتے ہیں

C.एकतर II किंवा III निघत असल्यास.
C.Either II or III follows
C.یا تو II یا III پیروی کرتا ہے

D.एकतर I किंवा II नाहीतर III किंवा IV निघत असल्यास.
D.Either I or II and either III or IV follow
D.یا تو I یا II اور یا تو III یا IV پیروی کرتے ہیں

Answer: B.एकतर III किंवा IV आणि II निघत असल्यास.
B.Either III or IV and II follow
B.یا تو III یا IV اور II پیروی کرتے ہیں

194 DIRECTIONS: A sentence with an underlined word is given below. Find the Word which is most similar in meaning to the underlined word.
Her bones became fragile and brittle after the prolonged illness.

A.Weak

B.Strong

C.Tough

D.Powerful

Answer: A.Weak

195 ‘ चंद्रोदय ’ या शब्दाची संधी सोडवा.

A.चंद्रो + दय

B.चं + द्रोदय

C.चंद्रोद + य

D.यापैकी नाही

Answer: D.यापैकी नाही

For More Info And Videos About TAIT-Exam Syllabus And Other Exam Visit My Channel
TAIT च्या 30 प्रश्नपत्रिका PDF
BADSHAHimp Available Request 9765226781
WWW.YouTube.com/BADSHAHimp
Subscribe My Channel

196 सूचना: अर्थपूर्ण परिच्छेद निर्माण करण्यासाठी, खाली दिलेली (P), (Q) (R), (S) आणि (T) ही पाच वाक्ये योग्य अनुक्रमाने पुनर्रचना करा; त्यांनतर खालील प्रश्नांची उत्तर द्या.

P. कुत्रा लोभी बनला आणि त्याने तो तुकडा मिळवायचे ठरविले.
Q. घरी चालत जाताना त्याला एका झऱ्यावरील पूल ओलांडावा लागत होता.
R. त्याने प्रतिबिंबाकडे झोकून दिले आणि त्याने तोंड उघडल्याबरोबर तो मांसाचा तुकडा पाण्यात पडला आणि अदृश्य झाला.
S. एके दिवशी, एका कुत्र्याने एका मांसाचा तुकडा पहिला.
T. तो जात असताना, त्याने स्वतःचे प्रतिबिंब पाण्यात पहिले आणि दुसरा एक कुत्रा मांसाचा तुकडा घेऊन जात असल्याचा त्याने विचार केला.

पुनर्रचना केल्यानंतर खालीलपैकी कोणते वाक्य दुसरे असेल?

DIRECTION: Rearrange the following five sentences (P), (Q), (R), (S) and (T) in the proper sequence to form a meaningful paragraph; then answer the questions given below them.
P. The dog got greedy and decided to have that piece as well.
Q. As it walked home, it had to cross a bridge over a stream.
R. He snapped at the reflection, and as soon as he opened his mouth, his piece of meat fell into the water and disappeared.
S. A dog found a piece of meat one day.
T. As it walked, it saw its reflection in the water and thought it was another dog with a piece of meat.

Which of the following should be the SECOND sentence after rearrangement?

ہدایات: ان پانچ جملوں (P)، (Q)، (R)، (S) اور (T) کو با معنی پیرا بنانے کے لئے دوبارہ ترتیب دیجئے، پھر نیچے دے گئے سوالوں کے جواب دیجئے

P. کتے کو لالچ ہوا ہار وو بھی وو ٹکڑا چاہتا تھا.
Q. جب وو گھر کی طرف نکلا ،اسکو ندی کے اپر پل سے گزر نا تھا.
R. وو چھایا پی بونکھا، اور جونہہی اسنے اپنا منہ کھولا، گوشت کہ ٹکڑا پانی میں گر گیا اور کھو گیا.
S. ایک دن کتے کو گوشت کہ ٹکڑا ملا.
T. جب وو چلا، اسنے پانی میں پرچھائی دیکھی اور سونچا یہ دوسرا کتا ہے گوشت کہ ٹکڑا لیکے.

دوبارہ ترییب دینے کے بعد کون سا جملہ دوسرا ہونا چاہیے؟

A.Q
A.Q
A.Q

B.S
B.S
B.S

C.P
C.P
C.P

D.T
D.T
D.T

For More Info And Videos About TAIT-Exam Syllabus And Other Exam Visit My Channel
BADSHAHimp TAIT च्या 30 प्रश्नपत्रिका PDF Available Request 9765226781 WWW.YouTube.com/BADSHAHimp Subscribe My Channel

Answer: A.Q
A.Q
A.Q

197 खालीलपैकी कोणते विधान बरोबर आहे?

Which statement is true?

کون سان بیان صحیح ہے؟

A.प्रकाशवर्ष म्हण्जे पोकळीमध्ये एक वर्षामध्ये प्रवास केलेले अंतर
A.Light year is the distance travelled in vacuum in one year
A.نوری سال (لائٹ یر) ایک ایسی مسافت ہے جو خلا کے اندر ایک سال میں طے ہوتی ہے

B.एक पार्सेक 3.26 प्रकाश वर्षाच्या बरोबर असते.
B.One parsec is equal to 3.26 light years.
B.-ایک پرسیک 3.26 نوری سال (لائٹ یر) کے برابر ہوتا ہے

C.खगोलशास्त्रीय एकक म्हणजे सुर्यापासून पृथ्वीचे क्षुद्र अंतर
C.Astronomical unit is the mean distance of the earth from the sun
C.فلکی یونٹ سورج سے زمین کا اوسط فاصلہ ہے

D.सर्व बरोबर आहेत
D.All are true
D.سبھی صحیح ہیں

Answer: D.सर्व बरोबर आहेत
D.All are true
D.سبھی صحیح ہیں

198 “माय एक्सपरीमेंट्स विथ ट्रुथ” यांनी लिहिले –

“My Experiments with truth” was written by –

مائی ایکسپریمنٹ وتھ ٹرتھ کے مصنف ہیں۔

A.जवाहरलाल नेहरु
A.Jawaharlal Nehru
A.جواہر لال نہرو

B.महात्मा गांधी
B.Mahatma Gandhi
B.مہاتما گاندھی

For More Info And Videos About TAIT-Exam Syllabus And Other Exam Visit My Channel
TAIT च्या 30 प्रश्नपत्रिका PDF Available Request 9765226781
BADSHAHimp
WWW.YouTube.com/BADSHAHimp
Subscribe My Channel

C.लाल बहादूर शास्त्री
C.Lal Bahadur Shastri
C.لال بہادر شاستری

D.डॉ. ए. पी.जे. अब्दुल कलाम
D.Dr. A.P.J. Abdul Kalam
D.ڈاکٹر اے پی جے عبدالکلام

Answer: B.महात्मा गांधी
B.Mahatma Gandhi
B.مہاتما گاندھی

199 एखादी व्यक्ती मूल्यांकनाद्वारे सुद्धा अभ्यास करू शकते-

Through Evaluation one can study—

تشخیص کے ذریعہ کوئی مطالعہ کرسکتا ہے-

A.विद्यार्थी
A.The students
A.طلباء

B.शिक्षक
B.The teachers
B.اساتذہ

C.वरील दोन्ही
C.Both the above
C.اوپر کے دونوں

D.वरीलपैकी एकही नाही
D.None of the above
D.اوپر میں سے کوئی نہیں

Answer: C.वरील दोन्ही
C.Both the above
C.اوپر کے دونوں

200 DIRECTIONS: A sentence with an underlined phrasal verb is given below. Out of the four options, choose the one which can be substituted for the given phrasal Verb.
Seeing his intense anger, she backed off .

A.moved forward

For More Info And Videos About TAIT-Exam Syllabus And Other Exam Visit My Channel
TAIT च्या 30 प्रश्नपत्रिका PDF
BADSHAHimp Available Request 9765226781
WWW.YouTube.com/BADSHAHimp
Subscribe My Channel

B.came in front

C.retreated

D.welcomed

Answer: C.retreated

For More Info And Videos About TAIT-Exam Syllabus And Other Exam Visit My Channel
TAIT च्या 30 प्रश्नपत्रिका PDF
BADSHAHimp Available Request 9765226781
YouTube WWW.YouTube.com/BADSHAHimp
Subscribe My Channel

Question Paper Title : TAIT_PAPER_11

Date of Exam : 2017-12-16 16:00:00.0

1	गुडनाईट मून यांनी लिहिले Goodnight Moon was written by "گُڈ نائٹ مون" کس نے لکھا تھا
	A.लिओ टॉल्स्टॉय A.Leo Tolstoy A. لیو ٹالسٹائی
	B.चार्ल्स डिकन्स B.Charles Dickens B.چارلس ڈیکنس
	C.मागरिट ब्राउन C.Margaret Brown C.مارگریٹ براون
	D.जे के रोलिंग D. J K Rowling D.جے کے راولنگ
Answer:	C.मागरिट ब्राउन C.Margaret Brown C.مارگریٹ براون

2

सूचना: खालील प्रश्नात उत्तरातील पर्यायांपैकी कोणत्या पर्यायी आकृतीत प्रश्नातील आकृती अंतर्भूत आहे?

DIRECTIONS: In the given question find the answer figure in which question figure is embedded.

ہدایات: دیئے گئے سوال میں جواب والی شکل دریافت کیجیئے جس میں سوال والی شکل سرایت کرگئی ہے

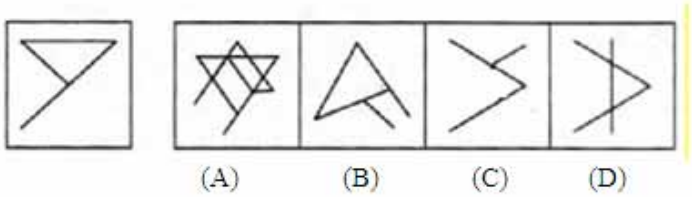

A. (A)

B. (B)

C. (C)

D. (D)

Answer: A. (A)

3 सूचना: खालील माहिती काळजीपूर्वक वाचा आणि खालील प्रश्नांची उत्तरे द्या:
A, B, C, D, E, F, G आणि H केंद्रासमोर बघत एका वर्तुळात बसलेले आहेत. D हा H च्या उजव्या बाजूला चौथा आणि B च्या डावीबाजूला दुसरा आहे. F हा B च्या उजव्या बाजूला चौथा आहे. C हा E च्या उजव्या बाजूला चौथा आहे जो, B किंवा D च्या तत्काळ डावीला नाही. A हा D चा तात्काळ शेजारी नाही.
G च्या डावीकडून चौथा कोण आहे?

DIRECTIONS: Study the following information carefully and answer the questions given below:
A, B, C, D, E, F, G and H are sitting around a circle facing the centre. D is fourth to the right of H and second to the left of B. F is fourth to the right of B. C is fourth to the right of E who is not an immediate right of B or D. A is not an immediate neighbour of D.
Who is fourth to the left of G?

ہدایات: مندرجہ ذیل معلومات کو دھیان سے پڑھیں اور نیچے دیے گئے سوالوں کے جواب دیں۔
A، B، C، D، E، F، G اور H مرکز کی طرف رخ کیے ہوئے ایک دائرے کے ارد گرد بیٹھے ہیں۔ D، H، B کے دائیں سے چوتھا اور F، B کے بائیں سے دوسرا ہے۔ C، E جو B یا D کے دائیں سے چوتھا ہے۔ A، D کا فوری پڑوسی نہیں ہے۔ کا فوری پڑوسی نہیں ہے۔
G کے بائیں طرف سے چوتھا کون ہے؟

A.E
A.E
A.E

B.F
B.F
B.F

C.A
C.A
C.A

D.अपुरी माहिती
D.Data inadequate
D.ڈیٹا ناکافی ہے

Answer: C.A
C.A
C.A

For More Info And Videos About TAIT-Exam Syllabus And Other Exam Visit My Channel
TAIT च्या 30 प्रश्नपत्रिका PDF Available Request 9765226781 BADSHAHimp
WWW.YouTube.com/BADSHAHimp Subscribe My Channel

4	‘ तरणोपाय ’ या शब्दाचा विरुद्धार्थी शब्द कोणता ?
	A.निरुपाय
	B.इलाज
	C.प्रकृती
	D.शरीरस्वास्थ्य
Answer:	A.निरुपाय

5	DIRECTIONS: A sentence with an underlined word is given below. Find the Word which is most similar in meaning to the underlined word. There is no doubt that eating vegetables is beneficial to one's health.
	A.Advantageous
	B.Injurious
	C.Harmful
	D.Unfavourable
Answer:	A.Advantageous

6	सरळ रूप द्या: 724562 + 1278924 + 9899219 = ? Simplify: 724562 + 1278924 + 9899219 = ? آسان بنائیں: 724562 + 1278924+ 9899219= ?
	A.11901705 A.11901705 A.11901705
	B.11903705 B.11903705 B.11903705

For More Info And Videos About TAIT-Exam Syllabus And Other Exam Visit My Channel
TAIT च्या 30 प्रश्नपत्रिका PDF Available Request 9765226781
BADSHAHimp
WWW.YouTube.com/BADSHAHimp
Subscribe My Channel

C.11902705
C.11902705
C.11902705

D.11904705
D.11904705
D.11904705

Answer: C.11902705
C.11902705
C.11902705

7 सूचना: खालील प्रश्नात दिलेल्या पर्यायांमधून नातेसंबंध असणारी आकृती शोधून काढा.

DIRECTIONS: In the question below, select the related figure from the given alternatives.

ہدایات: نیچے دیئے گئے سوال میں، دیئے گئے متبادلات میں سے متعلق متبادل چنئے۔

Question Figures :

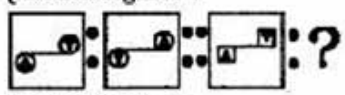

Answer Figures :

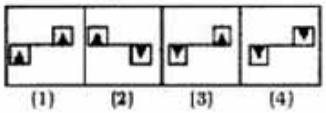

A. 1

B. 2

C. 3

D. 4

Answer: C. 3

8 सापेक्षतेच्या सिध्दांतासाठी कोणता वैज्ञानिक प्रसिध्द आहे?

Which scientist is known for his Theory of Relativity?

کونسا سائنسداں اپنے تناسب کے اصول کے لیے مشہور ہے؟

A.इसाक न्यूटन
A.Issac Newton
A.اسحاق نیوٹن

For More Info And Videos About TAIT-Exam Syllabus And Other Exam Visit My Channel
TAIT च्या 30 प्रश्नपत्रिका PDF Available Request 9765226781 BADSHAHimp
WWW.YouTube.com/BADSHAHimp Subscribe My Channel

B.जेम्स रुदरफोर्ड
B.James Rutherford
B.جیمز رودرفورڈ

C.अल्बर्ट आईन्सटाईन
C.Albert Einstein
C.البرٹ انسٹائن

D.थॉमस अल्वा एडीसन
D.Thomas Alva Edison
D.تھامس الوا ایڈیسن

Answer:

C.अल्बर्ट आईन्सटाईन
C.Albert Einstein
C.البرٹ انسٹائن

For More Info And Videos About TAIT-Exam Syllabus And Other Exam Visit My Channel
TAIT च्या 30 प्रश्नपत्रिका PDF
BADSHAHimp Available Request 9765226781
WWW.YouTube.com/BADSHAHimp
Subscribe My Channel

9 सूचना: खालील प्रत्येक प्रश्नात, तीन विधाने दिली आहेत, ज्यांच्यानंतर चार निष्कर्ष आहेत ज्यांना I, II आणि III असे अंकित केले आहे. सर्वसामान्यपणे ज्ञात असलेल्या तथ्यांशी विसंगती असली तरीही, हे सत्य असल्याचे तात्पुरते मानून, सामान्यतः ज्ञात असलेल्या तथ्यांकडे दुर्लक्ष करून, दिलेल्या निष्कर्षांपैकी कोणती तर्कशुद्धपणे विधानांचे अनुसरण करतात ते ठरवा.
विधाने :
सर्व अंक प्रतीके असतात.
सर्व प्रतीक अक्षरे असतात.
काही अक्षरे तत्व असतात.
निष्कर्ष:
I. सर्व अंक अक्षरे असतात.
II. काही प्रतीके तत्व असतात.
III. सर्व अक्षरे अंक असतात.

DIRECTION: In each of the following questions, three statements followed by four conclusions marked I. II, and III are given. Consider the statements to be true, even though they seem to be at variance with the commonly known facts and find out which of the given conclusion(s) logically follow(s) the statements, disregarding the commonly known facts.

Statements:
All digits are symbols.
All symbols are letters.
Some letters are elements.

Conclusions:
I. All digits are letters.
II. Some symbols are elements.
III. All letters are digits.

ہدایت: مندرجہ ذیل ہر سوال میں، تین بیانات دیے گئے ہیں جن کے بعد چار نتائج دیے گئے ہیں۔ بیانات کے درست ہونے پر I، II اور III غور کریں، اگرچہ وہ عام طور پر معلوم حقائق کے برعکس نظر آتے ہوں اور تلاش کریں کہ کون سے دیے گئے نتائج منطقی طور پر بیانات کی پیروی کرتے ہیں، عام طور پر معلوم حقائق سے قطع نظر۔

بیانات:
تمام اعداد علامات ہیں۔
تمام علامات حروف ہیں۔
کچھ حروف عناصر ہیں۔

حل:
I. تمام اعداد حروف ہیں۔
II. کچھ علامات عناصر ہیں۔
III. تمام حروف اعداد ہیں۔

A.केवळ निष्कर्ष I आणि II निघत असल्यास.
A.Only I and II follow
A.صرف I اور II پیروی کرتے ہیں

B.केवळ निष्कर्ष II आणि III निघत असल्यास.
B.Only II and III follow
B.صرف II اور III پیروی کرتے ہیں

C.केवळ निष्कर्ष I आणि III निघत असल्यास.
C.Only I and III follow
C.صرف I اور III پیروی کرتے ہیں

D.केवळ निष्कर्ष I निघत असल्यास.
D.Only I follows
D.صرف I پیروی کرتا ہے

Answer: D.केवळ निष्कर्ष I निघत असल्यास.
D.Only I follows
D.صرف I پیروی کرتا ہے

10 $(6)^2 \times (36)^5 = (6)^?$

$(6)^2 \times (36)^5 = (6)^?$

$(6)^2 \times (36)^5 = (6)^?$

A.14
A.14
A.14

B.12
B.12
B.12

C.31
C.31
C.31

D.24
D.24
D.24

Answer: B.12
B.12
B.12

11 4 नाणी उधळल्यानंतर काटा न मिळण्याची संभाव्यता असते

The probability of getting no tail when 4 coins are tossed is:

ٹیل نہ آنے کا امکان، جب 4سکوں کو اچھالا جائے

A.1/16
A.1/16
A.1/16

B.15/16
B.15/16
B.15/16

C.1/4
C.1/4
C.1/4

D.3/4
D.3/4
D.3/4

Answer: A.1/16
A.1/16
A.1/16

12 दिलेल्या व्यवस्थेत, उजवी कडून 14 व्या अक्षर / अंक / चिन्हा च्या उजव्या बाजूला 4 वथे अक्षर / अंक / चिन्ह कोणते आहे?

4 7 I ? J 2 T @ # S 5 P Q % U & X C

In the given arrangement, which is the 4th letter/digit/symbol to the right of the 14th letter/digit/symbol from right?

4 7 I ? J 2 T @ # S 5 P Q % U & X C

دے گئے ترتیب مے سیدھے ہاتھ سے چودھوا حرف کے سیدھے ہاتھ سے چوتھا حرف کونسا ہے؟

4 7 I ? J 2 T @ # S 5 P Q % U & X C

A.#
A.#
A.#

B.S
B.S
B.S

C.7
C.7
C.7

D.@
D.@
D.@

Answer: A.#
A.#
A.#

13 Choose the word which is opposite in meaning to the given word.
DWINDLE

A.Increase

B.Diminish

C.Decrease

D.Reduce

Answer: A.Increase

14 थर्मामीटर्समध्ये कोणता घटक वापरला जातो?

Which element is used in thermometers?

تھرمامیٹر میں کس دھات کا استعمال کیا جاتا ہے؟

A.चांदी
A.Silver
A.چاندی

B.तांबे
B.Copper
B.کاپر

C.हेलियम
C.Helium
C.ہیلیم

D.पारा
D.Mercury
D.مرکری

Answer: D.पारा
D.Mercury
D.مرکری

15	‘दिव्यासह असलेली महिला’ हे नाव कोणाला दिले गेले? The 'Lady with the Lamp' was the name given to? لیڈی وتھ د لیمب کا نام کس کو دیا گیا تھا؟
	A.विजयालक्ष्मी पंडीत A.Vijayalakshmi Pandit A.وجیالکشمی پنڈٹ
	B.मदर तेरेसा B.Mother Teressa B.مادر ٹریسا
	C.फ्लोरेन्स नाईटिंगल C.Florence Nightingale C.فلورننس نائٹنگیل
	D.सजोजिनी नायडू D.Sarojini Naidu D.سروجنی نائڈو
Answer:	C.फ्लोरेन्स नाईटिंगल C.Florence Nightingale C.فلورننس نائٹنگیل

16

निर्देश: खालील शब्दांची तार्किक क्रमाने मांडणी करा:
1. फळ
2. वृक्ष
3. वनस्पती
4. बीज

DIRECTIONS: Arrange the following in a logical order:

1. Fruit
2. Tree
3. Plant
4. Seed

ہدایات: ایک منطقی ترتیب میں مندرجہ ذیل کو مرتب کریں۔

1. پھل
2. درخت
3.پڑھ
4. بیج

A.1, 2, 4, 3
A.1, 2, 4, 3
A.1, 2, 4, 3

B.1, 2, 3, 4
B.1, 2, 3, 4
B.1, 2, 3, 4

C.4, 2, 3, 1
C.4, 2, 3, 1
C.4, 2, 3, 1

D.4, 3, 2, 1
D.4, 3, 2, 1
D.4, 3, 2, 1

Answer:

D.4, 3, 2, 1
D.4, 3, 2, 1
D.4, 3, 2, 1

17 सूचना: खालील पाच विधाने (P), (Q), (R), (S) आणि (T) यांची योग्य क्रमामध्ये पुन्हा आखणी करा जेणेकरून अर्थपूर्ण परिच्छेद तयार होईल; आणि मग खाली दिलेल्या प्रश्नांची उत्तरे लिहा.

P. सरते शेवटी फक्त तिला आनंदी करण्यासाठी, भगवान कृष्णांनी तिला बांधण्यासाठी परवानगी दिली.
Q.तिने तसे करण्यासाठी दोरी आणली, पण तिला समजले की ती खूपच छोटी आहे.
R.लवकरच तिला समजले की तिच्या मुलामध्ये काहीतरी जादू आहे.
S.एके दिवशी, कृष्णाच्या खोड्यांना कंटाळून, त्यांच्या आई यशोदेने त्यांना बांधायचे ठरवले.
T.तिने खूप मोठी आणली पण ती सुद्धा लहान झाली, त्यानंतर तिने आणखी मोठी आणली पण तिने देखिल बांधायला ती असमर्थ ठरली

पूनर्नियोजन केल्यावर कोणते विधान चतुर्थ असावे?

DIRECTION: Rearrange the following five sentences (P), (Q), (R), (S) and (T) in the proper sequence to form a meaningful paragraph; then answer the questions given below them.

P. Finally Lord Krishna allowed her to tie him up, just to make her happy.
Q. She brought a rope to do so, but realized it was very small.
R. Soon she realized that there is something miraculous about her son.
S. One day, tired of Shri Krishna’s mischief, his mother Yashoda decided to tie him up.
T. She got a bigger one but it turned out to be small too, then she got yet another one but was unable to tie him.

Which of the following should be the FOURTH sentence after rearrangement?

ہدایات: ان پانچ جملوں (P)، (Q)، (R)، (S) اور (T) کو با معنی پیرا بنانے کے لئے دوبارہ ترتیب دیجئے، پھر نیچے دے گئے سوالوں کے جواب دیجئے

P. آخر بھگوان کرشن نے انکو خد کو باندھنے کی اجازت دی۔صرف انکو خشی دینے کے لئے
Q.وہ ایک رسی لائیں،پھر انکو احساس ہوا کی وہ بہت چھوٹی ہے۔
R.تھوڑی دیر میں انکو سمجھ آگیا کی انکا بیٹا معجزانہ طور پر خاص ہے۔
S.ایک دن شری کرشنا کی شرارتوں سےتنگ آکرانکی ماں یشودہ نے انکو باندھ نے کا فیصلا کیا۔
T.وہ بڑی رسی لائی مگر وہ بھی چھوٹی نکلی۔پھر وہ اور بڑی لائیں مگر وہ بیٹے کو باندھنے سے ناکامیاب رہی۔

ان میں سے کون سا جملہ چوتھے نمبرکا جملہ ہوگا۔

A.R
A.R
A.R

B.Q
B.Q
B.Q

C.P
C.P
C.P

D.T
D.T
D.T

Answer: A.R
A.R
A.R

18 60 आठवड्यांना दिवसांमध्ये रूपांतरीत करा?

Convert 60 weeks into days?

60؟ ہفتوں کو دنوں میں بدلیں

A.185 दिवस
A.185 Days
A.185دن

B.180 दिवस
B.180 Days
B.180دن

C.420 दिवस
C.420 Days
C.420دن

D.181 दिवस
D.181 Days
D.181دن

Answer: C.420 दिवस
C.420 Days
C.420دن

19 ऑटोमोबाइलमध्ये वापरल्या जाणा-या इंधनाचे कोणते प्रकार आहे

What is the nature of fuels used in automobiles?

آٹوموبائل میں کس نوعیت کا ایندھن استعمال کیا جاتا ہے؟

A.घन
A.Solid
A.ٹھوس

B.द्रव
B. Liquid
B.سیال

C.गॅस
C. Gas
C.گیس

D.दोन्ही बी आणि सी
D. Both b and c
D.b اور c دونوں

Answer: D.दोन्ही बी आणि सी
D. Both b and c
D.b اور c دونوں

20 समाज एखाद्या व्यक्तीकडून त्याच्या/तिच्या वयानुसार वागण्याची जी अपेक्षा करतो तिचा अर्थ आहे

The expectation society has that person will act his/her age refers to

ایک عام سماج میں وہ شخص اپنی عمر کے مطابق کام کرے گا اسے کہا جاتا ہے

A.जैविक वय
A.biological age
A.حیاتیاتی عمر

B.सामाजिक वय
B.social age
B.سماجی عمر

C.मानसिक वय
C.psychological age
C.نفسیاتی عمر

D.ऐतिहासिक वय
D.historical age
D.تاریخی عمر

Answer: B.सामाजिक वय
B.social age
B.سماجی عمر

21 दुहेरी जीवन जगत असलेल्या प्राण्याला म्हणतात:

Animals leading a dual life are called:

جانور جو دوہری زندگی گزارتے ہیں انہیں کہا جاتا ہے

A.उभयचर
A.Amphibians
A.ایمفیبیئنس

B.सरपटणारे प्राणी
B.Reptiles
B. سانپ

C.पक्षी
C.Birds
C. پرندے

D.यापैकी एकही नाही
D.None of these
D. ان میں سے کوئی بھی نہیں

Answer: A.उभयचर
A.Amphibians
A.ایمفیبیئنس

22 ____म्हणजे वास्तवात अस्तित्वात नसणाऱ्या गोष्टीमधील सातत्यपूर्ण विश्वास

_____ is a persistent belief in something which is not present in reality

_____کسی ایسی چیز کے بارے میں لگاتار ایسا یقین ہے جو حقیقت میں موجود ہی نہیں ہے

A.भ्रम
A.Delusion
A.نظر کا دھوکہ

B.भ्रामक कल्पना
B.Illusion
B.سراب

C.आभास
C.Hallucination
C.ہذیان

D.मनोरचना
D.Disposition
D.تصفیہ

Answer:	A.भ्रम A.Delusion A.نظر کا دھوکہ

23	1501 × 999 = ? 1501 × 999 = ? 1501 × 999 = ?
	A.1499499 A.1499499 A.1499499
	B.1499599 B.1499599 B.1499599
	C.1499609 C.1499609 C.1499609
	D.1490599 D.1490599 D.1490599
Answer:	A.1499499 A.1499499 A.1499499

24	खालीलपैकी सर्वांत मोठा अपूर्णांक शोधा Find the largest of the following fractions مندرجہ ذیل کسور میں سے سب سے بڑی کسر تلاش کریں
	A.55/98 A.55/98 A.55/98
	B.12/23 B.12/23 B.12/23

C.29/57
C.29/57
C.29/57

D.37/72
D.37/72
D.37/72

Answer: A.55/98
A.55/98
A.55/98

25 . खालीलपैकी कोणता विद्यार्थी असफल होण्याचे एक वैध कारण असेल?

Which of the following would be a legitimate reason for failing students ?

مندرجہ ذیل میں سے کونسی طالب علموں کو ناکام کرنے کا جائز ذریعہ ہوگا؟

A.मानके राखण्यासाठी
A.To maintain standards
A.معیار کو برقرار رکھنے کے لئے

B.विद्यार्थ्यांना अधिक प्रयत्न करण्यास प्रवृत्त करणे
B.To motivate students to greater effort
B.طلباء کو مزید نتائج کے لئے حوصلہ افزائی کرنا

C.वर्गामध्ये परिवर्तनशीलता कमी करणे
C.To reduce the variability within a class
C.کلاس کے اندر تغیر کو کم کرنے کے لئے

D.उपरोक्तपैकी कोणतेही विद्यार्थी असफल होण्याचे एक वैध कारण नाही
D.None of the above is a legitimate reason for retaining children.
D.مندرجہ بالا میں سے کوئی بھی بچوں کو برقرار رکھنے کا ایک جائز ذریعہ نہیں ہے.

Answer: D.उपरोक्तपैकी कोणतेही विद्यार्थी असफल होण्याचे एक वैध कारण नाही
D.None of the above is a legitimate reason for retaining children.
D.مندرجہ بالا میں سے کوئی بھی بچوں کو برقرار رکھنے کا ایک جائز ذریعہ نہیں ہے.

26 सूचना: दोन विधाने आणि त्यानंतर चार निष्कर्ष, I, II, III आणि IV दिले आहेत. ही विधाने सामान्यतः ज्ञात वस्तुस्थितीपेक्षा भिन्न असली तरी सत्य आहेत असे समजा. दिलेल्यापैकी कोणता निष्कर्ष दिलेल्या विधानांवरुन नक्की काढता येऊ शकतो हे तुम्ही ठरवायचे आहे.तुमचे उत्तर सूचित करा.
विधाने:
(a) सर्व शेळ्या वाघ आहेत.
(b) सर्व वाघ सिंह आहेत.
निष्कर्ष:
I. सर्व वाघ शेळ्या आहेत.
II. सर्व सिंह वाघ आहेत.
III. एकही शेळी सिंह नाही.
IV. एकही सिंह शेळी नाही.

DIRECTION: Two statements are given following by four conclusions, I, II, III and IV. You have to consider that statements to be true, even if they seem to be at variance from commonly known facts. You are to decide which of the given conclusions can definitely be drawn from the given statements. Indicate your answer.

Statements:
(a) All goats are tigers.
(b) All tigers are lions.

Conclusion:
I. All tigers are goats.
II. All lions are tigers.
III. No goat is a lion.
IV. No lion is a goat.

ہدایات: دو سٹیٹمنٹ جوکہ چار خلاصوں پر مشتمل ہیں .I،II، III اور IV. اگرچہ دکھنے میں وہ بہت .اپ کو وہ سٹیٹمنٹ درست ماننا ہے، سارے حقاٰق ست مطبقت رکہتی ہو۔ اپ کو دیے گے خلاصوں میں سے یقینی طور پر اسے اختیار کرنا ہے جو سٹیٹمنٹ سے نکلا ہو. اپنا جواب تلاش کرے

اظہار بیان:
تمام بکریاں چیتا ہیں
تمام چیتے شیر ہیں

نتائج:
I۔ تمام چیتے بکریاں ہیں
IIتمام شیر چیتے ہیں۔
III۔کوئی بکری شیر نہیں ہے ۳
IV کوی شیر بکری نہیں ہے۔

A.एकतर II किंवा III निष्कर्ष निघेल
A.Either II or III follows
A.II یا III درست ہے

B.एकतर II किंवा IV निष्कर्ष निघेल
B.Either II or IV follows
B.II یا IV درست ہے

C.एकतर I किंवा III निष्कर्ष निघेल
C.Either I or III follows
C.I یا III درست ہے

D.एकही निष्कर्ष निघणार नाही
D.None of the conclusion follow
D.کوی بہی درست نہیں ہے

Answer: D.एकही निष्कर्ष निघणार नाही
D.None of the conclusion follow
D.کوی بہی درست نہیں ہے

27 सूचना: खालील पाच विधाने (P), (Q), (R), (S) आणि (T) यांची योग्य क्रमामध्ये पुन्हा आखणी करा जेणेकरून अर्थपूर्ण परिच्छेद तयार होईल; आणि मग खाली दिलेल्या प्रश्नांची उत्तरे लिहा.

P. सरते शेवटी फक्त तिला आनंदी करण्यासाठी, भगवान कृष्णांनी तिला बांधण्यासाठी परवानगी दिली.
Q.तिने तसे करण्यासाठी दोरी आणली, पण तिला समजले की ती खूपच छोटी आहे.
R.लवकरच तिला समजले की तिच्या मुलामध्ये काहीतरी जादू आहे.
S.एके दिवशी, कृष्णाच्या खोड्यांना कंटाळून, त्यांच्या आई यशोदेने त्यांना बांधायचे ठरवले.
T.तिने खूप मोठी आणली पण ती सुद्धा लहान झाली, त्यानंतर तिने आणखी मोठी आणली पण तिने देखिल बांधायला ती असमर्थ ठरली

पूनर्नियोजन केल्यावर कोणते विधान पाचवे असावे?

DIRECTION: Rearrange the following five sentences (P), (Q), (R), (S) and (T) in the proper sequence to form a meaningful paragraph; then answer the questions given below them.

P. Finally Lord Krishna allowed her to tie him up, just to make her happy.
Q. She brought a rope to do so, but realized it was very small.
R. Soon she realized that there is something miraculous about her son.
S. One day, tired of Shri Krishna’s mischief, his mother Yashoda decided to tie him up.
T. She got a bigger one but it turned out to be small too, then she got yet another one but was unable to tie him.

Which of the following should be the FIFTH sentence after rearrangement?

ہدایات: ان پانچ جملوں (P)، (Q)، (R)، (S) اور (T) کو با معنی پیرا بنانے کے لئے دوبارہ ترتیب دیجئے، پھر نیچے دے گئے سوالوں کے جواب دیجئے

P. آخر بھگوان کرشن نے انکو خد کو باندھنے کی اجازت دی۔صرف انکو خشی دینے کے لئے
Q.وہ ایک رسی لائیں،پھر انکو احساس ہوا کی وہ بہت چھوٹی ہے۔
R.تھوڑی دیر میں انکو سمجھ آگیا کی انکا بیٹا معجزانہ طور پر خاص ہے۔
S.ایک دن شری کرشنا کی شرارتوں سےتنگ آکرانکی ماں یشودہ نے انکو باندھ نے کا فیصلا کیا۔
T.وہ بڑی رسی لائی مگر وہ بھی چھوٹی نکلی۔پھر وہ اور بڑی لائیں مگر وہ بیٹے کو باندھنے سے ناکامیاب رہی۔

ان میں سے کون سا جملہ پانچویں نمبر کا جملہ ہوگا

A.P
A.P
A.P

B.S
B.S
B.S

C.Q
C.Q
C.Q

D.R
D.R
D.R

Answer: A.P
A.P
A.P

28 सूचना: खालील प्रश्नांमध्ये दिलेल्या पर्यायांमधून संबंधित अक्षर/शब्द/संख्या निवडा.

गवत : हिरवा ::

DIRECTIONS: In the following question, select the related letter/word/number from the given alternatives.

Grass : Green ::

سمت: مندرجہ ذیل سوال میں، دیے گئے متبادل سے متعلقہ حرف/لفظ/نمبر منتخب کریں۔

:: گھاس : سبز

A.गुलाब : शाखा
A.Rose : Branch
A.گلاب : برانچ

B.स्पंज : लवचिक
B.Sponge : Elastic
B.اسفنج : لچکدار

C.हिरा : चमकणे
C.Diamond : Shine
C.ہیرا : چمک

D.लाल : रक्त
D.Red : Blood
D.سرخ : خون

Answer: D.लाल : रक्त
D.Red : Blood
D.سرخ : خون

29 M हा T चा भाऊ आहे. T ही R ची बहीण आहे. P ही M ची आई आणि H ची पत्नी आहे. मग H ला किती मुले आहेत?

M is brother of T. T is sister of R. P is mother of M and wife of H. How many sons do H have?

T M کا بھائی ہے. R T کی بہن ہے. M P کی ماں اور H کی بیوی ہے. H کے کتنے بیٹے ہے؟

A.दोन
A.Two
A.دو

B.तीन
B.Three
B.تین

C.एक
C.One
C.ایک

D.माहिती अपुरी आहे
D.Data inadequate
D.ڈیٹا ناکافی

Answer: D.माहिती अपुरी आहे
D.Data inadequate
D.ڈیٹا ناکافی

30 जर खुर्चीला बिछाना म्हटले, बिछान्याला दगड म्हटले, कपाटाला बिछाना म्हटले, बिछान्याला दगड म्हटले, दगडाला उशी म्हटले आणि उशीला कुशन म्हटले. तर आपण कशावर झोपू शकतो?

If chair is called bed, bed is called rock, cupboard is called bed, bed is called rock, rock is called pillow and pillow is called cushion. Then on which we can sleep?

اگر کرسی کو چارپائی، چارپائی کو چٹان ، آلماری کو چارپائی، چارپائی کو چٹان، چٹان کو تکیہ، تکیہ کو گدّا اور گدے کو کمبل کہا جائے تو ہم کس پر سو سکتے ہیں؟

A.दगड
A.Rock
A.چٹان

B.कपाट
B.Cupboard
B.آلماری

C.बिछाना
C.Bed
C.تکیہ

D.यांपैकी कोणतीही नाही
D.None of these
D.ان میں سے کوئی نہیں

Answer: A.दगड
A.Rock
A.چٹان

31 Choose the word which is most similar in meaning to the given word.
DAUNTLESS

A.Fearless

B.Diffident

C.Timid

D.Nervous

Answer: A.Fearless

32 भारतामध्ये तीन प्रकारची वाळवंटे आहेत जी आहेत, वाळू वाळवंटे, मीठ वाळवंटे आणि थंड वाळवंटे. एका राज्यामध्ये थंड वाळवंट आहे त्याचे नाव सांगा.

There are three kinds of deserts in India: sand desert, salt desert, and cold desert. One of the states has a cold desert. Name it.

بھارت میں صحراؤں کی تین قسمیں ہیں: ریت صحرا، نمک صحرا، اور سرد صحرا. ایک ریاست میں سرد صحرا ہے. اس ریاست کا نام بتاؤ.

A.जम्मू आणि काश्मीर
A.Jammu and Kashmir
A. جموں و کشمیر

B.हिमाचल प्रदेश
B.Himachal Pradesh
B. ہماچل پردیش

C.राजस्थान
C.Rajasthan
C. راجستھان

D.गुजरात
D.Gujarat
D. گجرات

Answer: A.जम्मू आणि काश्मीर
A.Jammu and Kashmir
A. جموں و کشمیر

33 सूचना: खालील पाच विधाने (P), (Q), (R), (S) आणि (T) यांची योग्य क्रमामध्ये पुन्हा आखणी करा जेणेकरून अर्थपूर्ण परिच्छेद तयार होईल; आणि मग खाली दिलेल्या प्रश्नांची उत्तरे लिहा.

P. सरते शेवटी फक्त तिला आनंदी करण्यासाठी, भगवान कृष्णांनी तिला बांधण्यासाठी परवानगी दिली.
Q.तिने तसे करण्यासाठी दोरी आणली, पण तिला समजले की ती खूपच छोटी आहे.
R.लवकरच तिला समजले की तिच्या मुलामध्ये काहीतरी जादू आहे.
S.एके दिवशी, कृष्णाच्या खोड्यांना कंटाळून, त्यांच्या आई यशोदेने त्यांना बांधायचे ठरवले.
T.तिने खूप मोठी आणली पण ती सुद्धा लहान झाली, त्यानंतर तिने आणखी मोठी आणली पण तिने देखिल बांधायला ती असमर्थ ठरली

पूनर्निर्योजन केल्यावर कोणते विधान द्वितीय असावे?

DIRECTION: Rearrange the following five sentences (P), (Q), (R), (S) and (T) in the proper sequence to form a meaningful paragraph; then answer the questions given below them.

P. Finally Lord Krishna allowed her to tie him up, just to make her happy.
Q. She brought a rope to do so, but realized it was very small.
R. Soon she realized that there is something miraculous about her son.
S. One day, tired of Shri Krishna's mischief, his mother Yashoda decided to tie him up.
T. She got a bigger one but it turned out to be small too, then she got yet another one but was unable to tie him.

Which of the following should be the SECOND sentence after rearrangement?

ہدایات: ان پانچ جملوں (P)، (Q)، (R)، (S) اور (T) کو با معنی پیرا بنانے کے لئے دوبارہ ترتیب دیجئے، پھر نیچے دے گئے سوالوں کے جواب دیجئے

P. آخر بھگوان کرشن نے انکو خد کو باندھنے کی اجازت دی۔صرف انکو خشی دینے کے لئے
Q.-وہ ایک رسی لائیں،پھر انکو احساس ہوا کی وہ بہت چھوٹی ہے
R.-تھوڑی دیر میں انکو سمجھ آگیا کی انکا بیٹا معجزانہ طور پر خاص ہے
S.-ایک دن شری کرشنا کی شرارتوں سےتنگ آکرانکی ماں یشودہ نے انکو باندھ نے کا فیصلا کیا
T.-وہ بڑی رسی لائی مگر وہ بھی چھوٹی نکلی۔پھر وہ اور بڑی لائیں مگر وہ بیٹے کو باندھنے سے ناکامیاب رہی

ان میں سے کون سا جملہ دوسرے نمبر کا جملہ ہوگا۔

A.Q
A.Q
A.Q

B.S
B.S
B.S

C.P
C.P
C.P

D.T
D.T
D.T

Answer: A.Q
A.Q
A.Q

34 यश चाचणी करण्यात येणारी मुख्य अड़चन आहे

The main limitation of an Achievement test is—

کامیابی کی آزمائش کی بنیادی حد ہے-

A.विद्यार्थ्यांच्या शिक्षणात सुधारणा करण्यासाठी समन्वयित शिकवण देणे
A.To make complicated teaching in order to improve students' learning
A.طالب علموں کی تعلیم کو بہتر بنانے کے لئے پیچیدہ تدریس کو آسان بنانے کے لئے

B.ह्या चाचण्या मध्ये शिक्षण अनुभवांची संख्या समाविष्ट होने शक्य नसणे
B.These tests cannot include a number of learning experiences
B.یہ ٹیسٹ سیکھنے کے کئی تجربات کو شامل نہیں ہوسکتے ہیں

C.सर्व शैक्षणिक क्षेत्रांत त्याचे प्रमाणीकरण हानिकारक आहे
C.Its standardization in all the educational areas is harmful
C.تمام تعلیمی میدانوں میں اس کی معیار کاری نقصان دہ ہے

D.वरील सर्व
D.All the above
D.مذکورہ تمام

Answer: D.वरील सर्व
D.All the above
D.مذکورہ تمام

35	1-[5-{2+(-5+6-2)2}]=? 1-[5-{2+(-5+6-2)2}]=? 1-[5-{2+(-5+6-2)2}]=?
	A.– 4 A.– 4 A.– 4
	B.2 B.2 B.2
	C.0 C.0 C.0
	D.– 2 D.– 2 D.– 2
Answer:	A.– 4 A.– 4 A.– 4
36	खालीलपैकी कोणते सदिश राशी नाही? Which of the following is not a vector quantity? مندرجہ ذیل میں سے کون ایک ویکٹر کوانٹیٹی نہیں ہے؟
	A.गती A. Speed A.رفتار
	B.वेग B. Velocity B.حرکت
	C.बल C. Torque C.ٹارک
	D.विस्थापन D. Displacement D.ڈس پلیسمینٹ

Answer: A.गती
A. Speed
A.رفتار

37 क्रिस्टियानो रोनाल्डो हा प्रसिद्ध आहे –

Christiano Ronaldo is a famous –

کرسٹانو رونالڈو ایک مشہور _____ ہے

A.क्रिकेटर
A.Cricketer
A.کریکٹر

B.बास्केटबॉल खेळाडू
B.Basketball-player
B.باسکٹبال کا کھلاڑی

C.फुटबॉलर
C.Footballer
C.فٹبال کا کھلاڑی

D.टेनिस खेळाडू
D.Tennis-player
D.ٹینس کا کھلاڑی

Answer: C.फुटबॉलर
C.Footballer
C.فٹبال کا کھلاڑی

38 एक व्यक्ती 10% नफ्याने माल विक्री करतो. त्याने ती वस्तू 20% कमी किमतीला खरेदी केली आणि रु. 20 जास्त किमतीला तिची विक्री केली, त्याला 40% नफा झाला असता. आरंभिक खरेदी किंमत (रुपयांमध्ये) काय होती?

A man sells his goods at 10% profit. Had he purchased it for 20% less and sold it for Rs.20 more, he would have gained 40%. What was the initial C.P.(in Rs.)?

ایک آدمی اپنے سامان کو 10%منافع پر فروخت کرتا ہے. اگر اس نے اسے 20% کم پر خریدا اور اسے 20 روپےزیادہ میں فروخت کیا، تو وہ 40% نفع حاصل کے گا. ابتدائی سی پی{لاگت قیمت} (روپے میں) کیا ہوگی؟

A.990
A.990
A.990

B.980
B.980
B.980

C.970
C.970
C.970

D.1000
D.1000
D.1000

Answer: D.1000
D.1000
D.1000

39 पृथ्वीवरील सर्वांत लांब नदी कोणती आहे?

Which is the longest river on earth?

زمین پر سب سے لمبی ندی کونسی ہے؟

A.ॲमेझॉन
A.Amazon
A.امیزن

B.नाईल
B.Nile
B.نیل

C.गंगा
C.Ganga
C.گنگا

D.सिंधु
D.Indus
D.سندھ

Answer: B.नाईल
B.Nile
B.نیل

40	44 सेकंदांमध्ये मिनिट काट्याद्वारे काय कोन बनवला जातो? What angle is made by minute hand in 44 sec? منٹ کا ہاتھ کا ذاویہ کتنا ہوگا اگر 44 سیکنڈ دکھا رہا ہو تو؟
	A.2.2° A.2.2° A.2.2°
	B.4.4° B.4.4° B.4.4°
	C.2.4° C.2.4° C.2.4°
	D.3° D.3° D.3°
Answer:	B.4.4° B.4.4° B.4.4°
41	अंतःप्रेरणा भावनिक प्रतिक्रियांशी संबंधित असतात त्यांचा विस्मय आहे The instinct in corresponding with its emotional reaction ‘wonder’ is— —اس کے جذباتی ردعمل کے ساتھ تعلق کی جبلت میں 'حیرت' ہے
	A.जिज्ञासा A.Curiosity A.تجسس
	B.लिंग B.Sex B.جنس
	C.झुंज C.Combat C.جنگی
	D.टाळणे D.Escape D.فرار

Answer: A.जिज्ञासा
A.Curiosity
A.تجسس

42 खालीलपैकी कोणता पक्षी सर्वात अधिक काळ जिवंत राहातो?

Which of the following is the largest living bird?

مندرجہ ذیل میں سے کون سب بڑا جاندار پرندہ ہے؟

A.गरुड
A.Eagle
A.شاہین

B.मयूर
B. Peacock
B.مور

C.शहांमृग
C. Ostrich
C.شترمرغ

D.कीवी
D. Kiwi
D.کیوی

Answer: C.शहांमृग
C. Ostrich
C.شترمرغ

43 खालीलपैकी शुद्ध शब्द कोणता ?

A.जठरग्नी

B.जठराग्नी

C.जठरग्नि

D.जठाराग्नी

Answer: B.जठराग्नी

44 निर्देश: खालील प्रश्नांमध्ये प्रश्न चिन्हाच्या (?) जागी कोणते अंदाजे मूल्य यायला हवे? (तुम्ही अचूक मूल्य काढण्याचे अपेक्षित नाही).
4×12+699=?

DIRECTIONS: What approximate value should come in place of the question mark (?) in the following questions? (You are not expected to calculate the exact value).

4×12+699=?

ہدایات: مندرجہ ذیل سوال میں سوال کا نشان (?) کی جگہ پر کون سا تخمینہ ویلیو آئے گا - (آپ کو صحیح ویلیو نکالنے کی ضرورت نہیں ہے)

4×12+699=?

A.630
A.630
A.630

B.655
B.655
B.655

C.750
C.750
C.750

D.670
D.670
D.670

Answer: C.750
C.750
C.750

45 शिक्षकांनी खालीलपैकी कोणते शिकवण्याचे स्तर किमान स्वीकारले आहे?

Which one of the following level of teaching is least adopted by a teacher?

مندرجہ ذیل درجے کی تعلیم میں سے کون سا ایک کم از کم ایک استاد کی طرف سے اپنایا جانا چاہیئے؟

A.समजून घेण्याचे स्तर
A.Understanding level
A.تفہیم کی سطح

B.स्मरणशक्तीचे स्तर
B.Memory level
B.یاداشت کی سطح

C.विचार करण्याचे स्तर
C.Thinking level
C.سوچ کی سطح

D.मूल्यांकनाचे स्तर
D.Evaluation level
D.تشخیص کی سطح

Answer: A.समजून घेण्याचे स्तर
A.Understanding level
A.تفہیم کی سطح

46 खालीलपैकी कोणता मानसिक रचना पर्यावरणाद्वारे प्रभावित आहे

Which one of the following psychological construct is influenced by environment?

مندرجہ ذیل نفسیاتی تعمیر میں سے کون سا ماحول سے متاثر ہوتا ہے؟

A.बुद्धिमत्ता
A.Intelligence
A.ذہانت

B.शारीरिक वाढ
B.Physical growth
B.جسمانی ترقی

C.निसर्ग
C.Nature
C.فطرت

D.वरील सर्व
D.All the above
D.مذکورہ تمام

Answer: D.वरील सर्व
D.All the above
D.مذکورہ تمام

47 पृथ्वीच्या मध्यभागी शरीराचे वजन असते:

The weight of the body at the center of the earth is:

زمین کے مرکز میں جسم کا وزن ہوتا ہے:

A.अमर्यादित
A.Infinite
A.لامحدود

B.शून्य
B. Zero
B.صفر

C.भूमध्यरेषा पेक्षा किंचित कमी
C. Slightly less than that at the equator
C.خط استوا سے تھوڑا سا کم

D.भूमध्यरेषापेक्षा किंचित जास्त
D. Slightly more than that at the equator
D.خط استوا سے تھوڑا سا زیادہ

Answer: B.शून्य
B. Zero
B.صفر

48 सूचनाः दिलेल्या पर्यायांमधून ऍनालॉगस शब्द निवडा.

वायोलेटचे रेडसोबत नाते आहे जसे ब्लूचे ....सोबत आहे.

DIRECTIONS: Choose the analogous word from the given alternatives.

Violet is to Red as Blue is to _____.

ہدایات: دیے گئے متبادل سے مطابق لفظ کا انتخاب کریں

بنفشی کا وہی تعلق ہے لال کے ساتھ جو نیلے کا -------- کے ساتھ .

A.ब्लू
A.Blue
A. نیلے

B. ग्रीन
B.Green
B. ہرے

C.यलो
C.Yellow
C. پیلے

D.ऑरेंज
D.Orange
D. نارنگی

Answer: C.यलो
C.Yellow
C. پیلے

49 सूचना: दिलेल्या पर्यायांमधून श्रेणी पूर्ण करणारी योग्य आकृती निवडा.

DIRECTIONS: Complete the series by choosing right figure from the given choices.

ہدایات: دیئے گئے اختیارات میں صحیح شکل کا انتخاب کر کے سیریز کو مکمل کیجیئے۔

Problem Figures

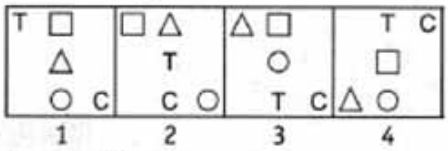

Answer Figures

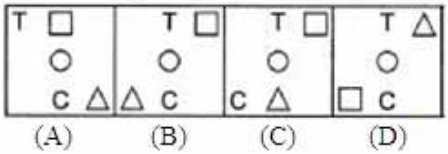

A. (A)

B. (B)

C. (C)

D. (D)

Answer: B. (B)

50 DIRECTIONS: A sentence with an underlined word is given below. Find the word which is opposite in meaning to the underlined word from the given options.
The disease that once claimed millions of lives has now been eradicated .

A.Preserved

B.Removed

C.Thrown

D.Eliminated

Answer: A.Preserved

51 डिजिटल संगणकांनी _____ यंत्राचा वापर दिनांक आणि कार्यक्रमासाठी सांकेतिक भाषेत केला आहे.

Digital computers use _____ system to encode date and programs.

ڈیجٹل کمپیوٹر میں تاریخ اور اور پروگرام کا کوڈ تیار کرنے کے لئے _____ کا استعمال ہوتا ہے۔

A.अर्धसंवाहक
A.Semiconductor
A.سیمی کنڈکٹر

B.दशांश
B. Decimal
B.ڈیسیمل

C.द्विअंकी
C. Binary
C.بائنری

D.रॅम
D. RAM
D.ریم (RAM)

Answer: C.द्विअंकी
C. Binary
C.بائنری

52 A sentence with an underlined idiomatic expression is given. What is the meaning of the idiomatic expression ‘a white elephant’ in the sentence given below?
At first, Eve was excited to inherit the farm, but it soon proved to be a white elephant she couldn't afford.

A.A Costly or troublesome possession

B.A very beautiful and delicate possession

C.A highly precious or valuable possession

D.None of the above

Answer: A.A Costly or troublesome possession

53 1सें.मी. बाजू असणारे घन ठोकळे एकत्र करून सोबतच्या आकृतीमधील भरीव वस्तू बनली आहे. तर त्यात एकूण किती ठोकळे असतील?

The solid as shown in the figure is made up of cubical blocks each of side 1 cm. The number of blocks is –

جو ٹھوس چیز شکل میں دکھائی گئی ہے، وہ کیوبکل بلاکس سے بنی ہے، ہر جانب 1 سینٹی میٹر ہے، اس میں کتنے بلاکس ہیں؟

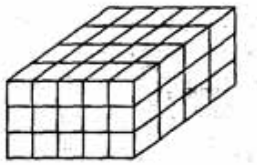

A. 52

B. 60

C. 72

D. 48

Answer: B. 60

54 सूचना: खाली दिलेल्या विधान (A) आणि कारण (R) साठी, खालील पैकी योग्य पर्याय निवडा:

विधान (A): गोड्या पाण्याचा उत्कलनांक समुद्राच्या पाण्यापेक्षा जास्त असतो.
कारण (R): गोड्या पाण्यात पुष्कळ अशुद्धता आहेत.

DIRECTION: For the Assertion (A) and Reason (R) given below, choose the correct alternative from the following:

Assertion (A): Boiling point of freshwater is higher than that of seawater.
Reason (R): Freshwater contains lot of impurities.

ہدایت: نیچے دئیے گئے اسرشن (A) اور وجہ (R) کے لئے، مندرجہ ذیل میں سے صحیح متبادل منتخب کریں:

اسرشن (A): تازہ پانی کا نقطہ ابال سمندر کے پانی سے زیادہ ہے۔
وجہ (R): تازہ پانی میں بہت ساری آلودگی موجود ہوتی ہے۔

A.दोन्ही (A) आणि (R) सत्य आहेत आणि (R) (A) च योग्य स्पष्टीकरण आहे
A.Both (A) and (R) are true and (R) is the correct explanation of (A)
A. (A) اور (R) دونوں صحیح ہیں اور (R) (A) کی درست وضاحت ہے

B.दोन्ही (A)आणि (R) खरे आहेत, परंतु (R) (A) च योग्य स्पष्टीकरण नाही.
B.Both (A) and (R) are true, but (R) is not the correct explanation of (A)
B. (A) اور (R) دونوں صحیح ہیں، لیکن (R) (A) کی درست وضاحت نہیں ہے

C.(A) सत्य आहे, परंतु (R) खोटे आहे.
C.(A) is true, but (R) is false
C. (A) صحیح ہے، لیکن (R) غلط ہے

D.दोन्ही (A) आणि (R) खोटे आहेत
D.Both (A) and (R) are false
D. (A) اور (R) دونوں غلط ہیں

Answer: D.दोन्ही (A) आणि (R) खोटे आहेत
D.Both (A) and (R) are false
D. (A) اور (R) دونوں غلط ہیں

55 विधान:
२०२० पर्यंत भारताची लोकसंख्या चीनची लोकसंख्या पासून अधिक असेल.

कृतीचा कोर्स:
I. कौटुंबिक नियोजन अनिवार्य केले पाहिजे.
II. गर्भपात वैध केले पाहिजे.

Statement:
By 2020 India's population will cross population of China.

Course of actions:
I. Family planning should be made compulsory.
II. Abortions should be legalised.

بیان:
2020 تک انڈیا کی آبادی چائنہ کی آبادی سے بڑھ جائے گی۔

لائحہ عمل:
I۔فیملی پلاننگ کو لازمی قرار دے دینا چاہیے۔
II۔ ابورشن کو قانونی بنا دینا چاہیے۔

A.फक्त I अनुसरून आहे
A.Only I follows
A. صرف I لاگو ہو گا۔

B.फक्त II अनुसरण करते आहे
B.Only II follows
B. صرف II لاگو ہو گا۔

C.एकतर I किंवा II अनुसरून आहे
C.Either I or II follows
C. I یا II میں سے ایک لاگو ہو گا۔

D.I किंवा II दोन्हीपैकी काहीही अनुसरण करत नाही
D.Neither I nor II follows
D. I اور II میں سے کوئی بھی لاگو نہیں ہو گا۔

Answer:
D.I किंवा II दोन्हीपैकी काहीही अनुसरण करत नाही
D.Neither I nor II follows
D. I اور II میں سے کوئی بھی لاگو نہیں ہو گا۔

56 भारत हा जगामधील _____ सर्वाधिक लोकसंख्या असलेला देश आहे.

India is the _____ largest populated country in the world.

ہندوستان دنیا میں _____ بڑی آبادی والا ملک ہے

A.पहिला
A.First
A.پہلا

B.दुसरा
B.Second
B.دوسرا

C.तिसरा
C.Third
C.تیسرا

D.चौथा
D.Fourth
D.چوتھا

Answer:
B.दुसरा
B.Second
B.دوسرا

57 निर्देश: खालील शब्दांची इंग्रजी शब्दकोशानुसार मांडणी करा.
(1) Credential
(2) Creed
(3) Crease
(4) Cremate
(5) Credible

DIRECTIONS: Arrange the following words according to the English dictionary.
(1) Credential
(2) Creed
(3) Crease
(4) Cremate
(5) Credible

ہدایت: انگریزی لغت کے مطابق مندرجہ ذیل الفاظ کو مرتب کریں۔

(1) Credential
(2) Creed
(3) Crease
(4) Cremate
(5) Credible

A.1, 2, 3, 4, 5
A.1, 2, 3, 4, 5
A.1, 2, 3, 4, 5

B.1, 5, 3, 4, 2
B.1, 5, 3, 4, 2
B.1, 5, 3, 4, 2

C.5, 1, 2, 3, 4
C.5, 1, 2, 3, 4
C.5, 1, 2, 3, 4

D.3, 1, 5, 2, 4
D.3, 1, 5, 2, 4
D.3, 1, 5, 2, 4

Answer: D.3, 1, 5, 2, 4
D.3, 1, 5, 2, 4
D.3, 1, 5, 2, 4

58	संतुलनाच्या संकल्पनेमध्ये P – O – Xत, “O” म्हणजे In concept of balance P – O – X, “O” stands for توازن کے تصور کے نظریے P – O – X,میں O کا فُل فارم ہے:
	A.अनादर टारगेट A.Another target A.Another target دوسرا ہدف
	B.अदर परसन B.Other person B.Other person دوسرا شخص
	C.ऑब्सेसिव्हनेस C.Obsessiveness C.Obsessiveness آسیب زدگی
	D.यापैकी एकही नाही D.None of these D.ان میں سے کوئی نہیں
Answer:	B.अदर परसन B.Other person B.Other person دوسرا شخص

59 सूचना: खाली दिलेल्या प्रश्नात एक विधान आहे ज्याचे I आणि II असे दोन निष्कर्ष त्याखाली अंकित केलेले आहेत. या आधारे सर्वात योग्य पर्याय निवडा.

विधान:
भारतातील बलात्काराचे खटले वाढतच आहेत आणि शहरातील महिला विरोधक ह्याविरुद्ध त्यांचा आवाज वाढवत आहेत.

निष्कर्ष:
I. बलात्कार ही शहरी भागातील समस्या आहे.
II. भारतातील शहरांमध्ये बलात्काराचे खटले जास्त आहेत.

DIRECTIONS: The question below has a statement followed by two conclusions numbered I and II. Based on this choose the option that is most suitable.

Statement:
The rape cases in India are increasing and women protesters in cities are raising their voice against this.

Conclusions:
I. Rape is an urban problem.
II. Rape cases are more in urban India.

ہدایات: نیچے دیے گئے سوال میں ایک بیان کے بعد دو نتائج I اور II دیے گئے ہیں۔ اس کی بنیاد پرانتہائی موزوں آپشن کا انتخاب کیجیے۔

بیان:
انڈیا میں ریپ کیسز بڑھ رہے ہیں اور شہروں میں خواتین مظاہرین اس کے خلاف آواز بلند کر رہی ہیں.

نتیجے:
I. ریپ کیسز ایک شہری مسئلہ ہے.
II. انڈیا کے شہروں میں ریپ کیسز واقعات زیادہ ہیں.

A.केवळ निष्कर्ष क्रमांक I विधानास अनुसरून आहे
A.Only Conclusion I follows
A. صرف نتیجہ I لاگو ہو گا۔

B.केवळ निष्कर्ष क्रमांक II विधानास अनुसरून आहे
B.Only Conclusions II follows
B. صرف نتیجہ II لاگو ہو گا۔

C.निष्कर्ष क्रमांक I किंवा II अनुसरून आहे
C.Either I or II follows
C. I یا II میں سے ایک لاگو ہو گا۔

D.कोणताही निष्कर्ष अनुसरून नाही
D.Neither I nor II follow
D. I اور II میں سے کوئی بھی لاگو نہیں ہو گا۔

Answer: D.कोणताही निष्कर्ष अनुसरून नाही
D.Neither I nor II follow
D. I اور II میں سے کوئی بھی لاگو نہیں ہو گا۔

60 **सूचना:** दिलेल्या पर्यायांमधून श्रेणी पूर्ण करणारी योग्य आकृती निवडा.

DIRECTIONS: Complete the series by choosing right figure from the given choices.

ہدایات: دیئے گئے اختیارات میں صحیح شکل کا انتخاب کر کے سیریز کو مکمل کیجیئے۔

Problem Figures

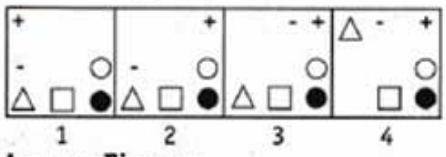

Answer Figures

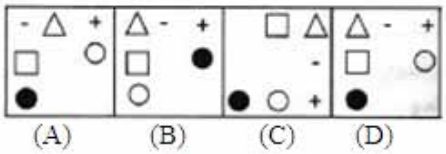

A. (A)

B. (B)

C. (C)

D. (D)

Answer: D. (D)

61 तोंडी अभिव्यक्तीतून भावनांचे उद्रेकांना _____म्हणून ओळखले जाते.

Discharge of emotions through verbal expression is known as

زبانی اظہار کے ذریعہ جذبات کو خارج کرنے کے طور پر جانا جاتا ہے

A.भावनात्मक विरेचन
A.Emotional catharsis
A.جذباتی کیتھاریس

B.भावनात्मकबुद्धिमत्ता
B.Emotional intelligence
B. جذباتی انٹیلی جنس

C.भावनात्मकउद्रेक
C.Emotional outburst
C.جذباتی ادارے

D.भावनात्मक ताण
D.Emotional stress
D. جذباتی کشیدگی

Answer: A.भावनात्मक विरेचन
A.Emotional catharsis
A.جذباتی کیتھاریس

62 **सूचना**: खालील प्रश्नात दिलेल्या पर्यायांमधून नातेसंबंध असणारी आकृती शोधून काढा.

DIRECTIONS: In the question below, select the related figure from the given alternatives.

ہدایات: نیچے دیئے گئے سوال میں، دیئے گئے متبادلات میں سے متعلق متبادل چنئے۔

प्रश्न आकृत्या
Problem Figures
سوالی شکل



उत्तरासाठी पर्यायी आकृत्या
Answer Figure
جوابی شکل

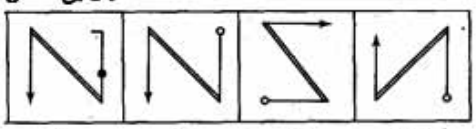

A. (A)

B. (B)

C. (C)

D. (D)

Answer: D. (D)

63 सूचना: खालील प्रश्नांमध्ये दिलेल्या पर्यायांमधून संबंधित अक्षर समूह निवडा.

HAND : JBPE :: PALM : ?

DIRECTIONS: In the following question, select the related group of letters from the given alternatives.

HAND : JBPE :: PALM : ?

سمت: مندرجہ ذیل سوال میں، دیے گئے متبادل میں سے حروف کا متعلقہ گروپ منتخب کریں۔

HAND : JBPE :: PALM : ?

A.RBNM
A.RBNM
A.RBNM

B.RBMN
B.RBMN
B.RBMN

C.QBNN
C.QBNN
C.QBNN

D.RBNN
D.RBNN
D.RBNN

Answer: D.RBNN
D.RBNN
D.RBNN

64 जर 5 मुली एक ड्रेस 9 दिवसांत कशिदा करतात, तर तेच काम करण्यासाठी 3 मुलींद्वारे घेतलेल्या दिवसांची संख्या किती?

If 5 girls can embroider a dress in 9 days, then the number of days taken by 3 girls for the same work will be:

اگر 5لڑکیاں ایک لباس کی 9دنوں میں کڑھائی کرتی ہیں ۔ تو 3 لڑکیوں کو کتنے دن درکار ہیں اسی کام کو مکمل کرنے کے لیے؟

A.14 दिवस
A.14 days
A.14دن

B.10 दिवस
B.10 days
B.10دن

C.20 दिवस
C.20 days
C.20دن

D.15 दिवस
D.15 days
D.15دن

Answer: D.15 दिवस
D.15 days
D.15دن

65 निर्देश: खालीदिलेल्या अक्षराच्या क्रमात काही अक्षरे गहाळ केली आहेत ते त्या क्रमाने खाली दिलेल्या पर्यायांपैकी एक आहे

aa _ bc _b _a _c _ a _ ccaa

DIRECTIONS: In each of the following letter series, same of the letters are missing which are given in that order as one of the alternatives below it.

aa _ bc _b _a _c _ a _ ccaa

جیل کے حرف سرج میں کوئی حرف گمشدہ ہے آپکو انکی شناخت جیل کے اختیارات سے کرنی ہے

aa _ bc _b _a _c _ a _ ccaa

A.aabbcc
A.aabbcc
A.aabbcc

B.bcbaca
B.bcbaca
B.bcbaca

C.abcabc
C.abcabc
C.abcabc

D.bacbac
D.bacbac
D.bacbac

Answer: B.bcbaca
B.bcbaca
B.bcbaca

66 30 मुलींच्या रांगेत, पुढील बाजूने नयनतारा चौदाव्या स्थानावर आहे आणि खालून फुलवारी नवव्या स्थानावर आहे. तर नयनतारा आणि फुलवारी यांच्यामध्ये किती मुली आहेत ?

In a queue of 30 girls, Nayantara is fourteenth from the front and Fulwaari is ninth from the bottom. How many girls are there between Nayantara and Fulwaari?

30 لڑکیوں کی کتار میں، نیانتارا آگے سے چودوی اور فلواری نیچے سے نووی ہے.نیانتارا اور فلواری کے درمیان کتنی لڑکیاں ہے؟

A.2
A.2
A.2

B.3
B.3
B.3

C.4
C.4
C.4

D.7
D.7
D.7

Answer: D.7
D.7
D.7

67 0.09 चे वर्गमूळ किती?

What is the square root of 0.09?

0.09 کا مربع روٹ کیا ہے؟

A.0.3
A.0.3
A.0.3

B.0.03
B.0.03
B.0.03

C.0.81
C.0.81
C.0.81

D.8.10000000000000003E-2
D.8.10000000000000003E-2
D.8.10000000000000003E-2

Answer: A.0.3
A.0.3
A.0.3

68 सूचना: खालील माहिती काळजीपूर्वक वाचा आणि खालील प्रश्नांची उत्तरे द्या:
A, B, C, D, E, F, G आणि H केंद्रासमोर बघत एका वर्तुळात बसलेले आहेत. D हा H च्या उजव्या बाजूला चौथा आणि B च्या डावीबाजूला दुसरा आहे. F हा B च्या उजव्या बाजूला चौथा आहे. C हा E च्या उजव्या बाजूला चौथा आहे जो, B किंवा D च्या तत्काळ डावीला नाही. A हा D चा तात्काळ शेजारी नाही.
Gच्या संदर्भामध्ये Bची स्थिती काय असेल?

DIRECTIONS: Study the following information carefully and answer the questions given below:
A, B, C, D, E, F, G and H are sitting around a circle facing the centre. D is fourth to the right of H and second to the left of B. F is fourth to the right of B. C is fourth to the right of E who is not an immediate right of B or D. A is not an immediate neighbour of D.
What is B's position with respect to G?

ہدایات: مندرجہ ذیل معلومات کو دھیان سے پڑھیں اور نیچے دیے گئے سوالوں کے جواب دیں۔
A، B، C، D، E، F، G اور H مرکز کی طرف رخ کیے ہوئے ایک دائرے کے ارد گرد بیٹھے ہیں۔ D، H کے دائیں سے چوتھا اور B کے بائیں سے دوسرا ہے۔ F، B کے دائیں سے چوتھا ہے۔ C، E کے دائیں سے چوتھا ہے جو B یا D کے دائیں سے چوتھا نہیں ہے۔ A، D کا فوری پڑوسی نہیں ہے۔
G کے تعلق سے B کی پوزیشن کیا ہے؟

A.उजवीकडून तिसरा
A.Third to the right
A.دائیں سے تیسری

B.डावीकडे तिसरा
B.Third to the left
B.بائیں سے تیسری

C.उजवीकडून पाचवा
C.Fifth to the right
C.دائیں سے پانچویں

D.डावीकडून चौथा
D.Fourth to the left
D.بائیں سے چوتھی

Answer: A.उजवीकडून तिसरा
A.Third to the right
A.دائیں سے تیسری

69 सूचना : खालील प्रत्येक प्रश्नात दोन विधाने I आणि II दिलेले आहेत. हे विधान एकतर स्वतंत्र कारण असू शकतात किंवा स्वतंत्र कारणांचे परिणाम असू शकतात. यांपैकी एक विधान इतर विधानाचा परिणाम असू शकतो. दोन्ही विधाने वाचा आणि खालीलपैकी कोणत्या उत्तराचा पर्याय या दोन्ही विधानांमधील संबंधांचे वर्णन करतो ते ठरवा.

विधान :
I. या वर्षी बँक 'N' ने त्यांचा रौप्य महोत्सव साजरा केला आहे.
II. अधिक ग्राहक बँक 'M' च्या बाजार शाखेत आकर्षित होत आहेत.

DIRECTIONS: Below in each question are given two statements I and II. These statements may be either independent causes or may be effects of independent causes. One of these statements may be the effect of the other statement. Read both the statements and decide which of the following answer choice correctly depicts the relationship between these two statements.
Statements:
I. This year Bank 'N' has celebrated its silver jubilee.
II. More customers are getting attracted to the market branch of Bank M.

ہدایات: نیچے ہر سوال میں دو بیانات I اور II آزاد وجوہات یا پھر آزاد وجوہات کے اثرات ہو سکتے ہیں۔ انہیں گئے ہیں۔ یہ بیانات یا تو
بیانات میں سے ایک بیان دوسرے کا اثر ہو سکتا ہے۔دونوں بیانات پڑھیں اور فیصلہ کریں کہ نیچے دیے گئے کس جواب کا انتخاب ان
دونوں بیانات کے در میان تعلق کو ٹھیک سے ظاہر کرتا ہے۔

بیانات:
I – اس سال N بنک نے اپنی سلور جوبلی منائی ہے۔
II - M بنک کی مارکیٹ برانچ کی طرف زیادہ کسٹمرز متوجہ ہو رہے ہیں۔

A.I हा परिणाम आहे आणि II हे त्याचे तात्काळ आणि प्रमुख कारण आहे;
A.I is effect and II is its immediate and principal cause;
A. بیان نمبر I بیان نمبر II اثر ہے اور بنیادی وجہ ہے۔ اس کی فوری اور

B.I हे तात्काळ आणि प्रमुख कारण आहे आणि II हा त्याचा परिणाम आहे;
B.I is the immediate and principal cause and II its effect;
B. بیان نمبر I بیان نمبر II فوری اور بنیادی وجہ ہے اور بیان نمبر اس کا اثر ہے۔

C.I हा परिणाम आहे परंतु II हे त्याचे तात्काळ आणि प्रमुख कारण नाही;
C.I is an effect but II is not its immediate and principal cause;
C. بیان نمبر I بیان نمبر II اثر ہے لیکن بیان نمبر اس کی فوری اور بنیادی وجہ نہیں ہے۔

D.यापैकी कोणतेही नाही
D.None of these.
D. ان میں سے کوئی نہیں۔

Answer: D.यापैकी कोणतेही नाही
D.None of these.
D. ان میں سے کوئی نہیں۔

70 निर्देश: खालील प्रश्न दिलेल्या शब्दांवर आधारित आहेत.

Hell/ Valuable/ Reify/ Plethoric/ Story

'स्टोरी' या शब्दात किती शब्दानच्या जोडी मध्ये तितकेच वर्ण आहेत जितके इंगजी वर्ण मालेतील आहेत?

DIRECTIONS: Following question is based on the given words.

Hell/ Valuable/ Reify/ Plethoric/ Story

In the word ‘Story’ how many pairs of words have as many letter as in English alphabet?

ہدایت جیل کے سوال دے ہے لفجونپر مشتمل ہیں

Hell/ Valuable/ Reify/ Plethoric/ Story

Story لفج میں انگریجی حرف تہجیبی کے کتنی جودیا ہیں

A.एक
A.One
A.ایک

B.दोन
B.Two
B.دو

C.तीन
C.Three
C.تین

D.चार
D.Four
D.چار

Answer: B.दोन
B.Two
B.دو

71 ‘ फडशा पाडणे ‘ या वाक्प्रचाराचा अर्थ काय ?

A.पराभव करणे

B.संपविणे

C.झाडावरची फळे तोडणे

D.घरात फरशी लावणे

Answer: B.संपविणे

72 एका इलेक्ट्रॉनिक दुकानामध्ये, 220 पिवळे बल्ब आणि 320 लाल बल्ब आहेत. लाल आणि पिवळ्या बल्बचे गुणोत्तर किती?

In Electronic shop, there are 220 yellow bulbs and 320 Red bulbs. What is the ratio of Red and Yellow bulbs?

بجلی کی دکان میں، 220 پیلے بلب اور 320 سرخ بلب ہیں۔ سرخ اور پیلے بلب کا تناسب کیا ہے؟

A.22:16
A.22:16
A.22:16

B.16:22
B.16:22
B.16:22

C.16:11
C.16:11
C.16:11

D.9:16
D.9:16
D.9:16

Answer: C.16:11
C.16:11
C.16:11

73 सूचना: खालील प्रश्नांमध्ये दिलेल्या पर्यायांमधून संबंधित अक्षर/शब्द/संख्या निवडा.

12 : 14 : : 23 : ?

DIRECTIONS: In the following question, select the related letter/word/number from the given alternatives.

12 : 14 : : 23 : ?

سمت: مندرجہ ذیل سوال میں، دیے گئے متبادل سے متعلقہ حرف/لفظ/نمبر منتخب کریں۔

12 : 14 : : 23 : ?

A.25
A.25
A.25

B.27
B.27
B.27

C.15
C.15
C.15

D.28
D.28
D.28

Answer: A.25
A.25
A.25

74 मानवी डोळाला अदृश्य गोष्टी अनेकदा याच्या अंतर्गत पाहिले जाऊ शकतात

Things invisible to the human eyes can often be seen under

انسانی آنکھوں سے پوشیدہ چیزوں کو------ تحت دیکھا جا سکتا ہے

A.क्ष-किरण
A.X-Ray
A. ایکس رے

B.गामाकिरण
B.Gamma Ray
B. گاما رے

C.बीटाकिरण
C.Beta Ray
C. بیٹا رے

D.अल्ट्राव्हायोलेटकिरण
D.Ultra Violet Ray
D. الٹرا وائلٹ رے

Answer: A.क्ष-किरण
A.X-Ray
A. ایکس رے

75 जर - म्हणजे x, x म्हणजे + ,+ म्हणजे ÷ आणि ÷ म्हणजे ,- तर $4 \times 12 + 3 - 6 \div 6 = ?$

If - means x, x means +, + means ÷ and ÷ means -, then $4 \times 12 + 3 - 6 \div 6 = ?$

اگر - مطلب x ، x مطلب +، + مطلب ÷، اور ÷ مطلب -، تو $4 \times 12 + 3 - 6 \div 6 = ?$

A. 23

B. 24

C. 40

D. 22

Answer: D. 22

76 $\sqrt{784}$ चे मूल्य आहे:

$\sqrt{784}$ is equal to

$\sqrt{784}$ مساوی ہے:

A. 52

B. 28

C. 61

D. 60

Answer: B. 28

77 पौगंडावस्थेसाठी कोणते विधान खरे आहे

Which statement for adolescence is true

سن بلوغیت کے بارے میں کون سا بیان صحیح ہے

A.पौगंडावस्था ही सामान्यपणे किशोर वयाशी संबंधित असते
A.Adolescence is usually associated with teenage years
A.سن بلوغیت کا تعلق عام طور پر نو عمری سے ہوتا ہے

B.पौगंडावस्थेचा शेवट आणि प्रौढत्वाची सुरुवात हे देश व कार्यागणिक वेगवेगळे असतात
B.The and of adolescence and the beginning of adulthood varies by country and by function
B.بلوغیت کے سال کا آغاز الگ الگ ملک کے حساب سے الگ الگ ہوتا ہے

C.पौगंडावस्थेत लिंग अवयव, उंची, वजन व स्नायूंचे वस्तुमान तसेच मेंदूमधील बदल प्रामुख्याने होतात
C.Adolescent age is marked y changes in sex organs height weight and muscle mars as well as changes in brain
C.بلوغیت کی نشانی جنسی کے اعضا کی اونچائی وزن اور پٹھے میں وائی کی تبدیلی ہوتی ہے ساتھ ہی دماغ میں بھی بدلاو ہوتا ہے

D.वरीलपैकी सर्व
D.all of the above
D.درج بالا سبھی

Answer: D.वरीलपैकी सर्व
D.all of the above
D.درج بالا سبھی

78 निर्देश: पुढील प्रश्नांपैकी प्रत्येक प्रश्नात एक संख्या गहाळ आहे. मालिकेचा नमुना समजून घ्या आणि योग्य संख्या निवडा.
16, 22, 34, 58, 106, ……., 394

DIRECTION: In each of the following questions, one number is missing in the series. You have to understand the pattern of the series and insert the number.

16, 22, 34, 58, 106, ..., 394

ہدایت جیل کے ہر سوال میں سرج کا ایک نمبر گمشدہ ہے . آپکو اس سرج کو سمجھنا ہے. اور گمشدہ نمبر کو یہا کھوجنا ہے

16, 22, 34, 58, 106, ……., 394

A.178
A.178
A.178

B.175
B.175
B.175

C.288
C.288
C.288

D.202
D.202
D.202

Answer: D.202
D.202
D.202

79 एका संध्याकाळी सूर्यास्तापूर्वी रीना व हीना एकमेकींकडे तोंड करून बोलत होत्या. हिनाची सावली हेमाच्या बरोबर उजवीकडे असल्यास रीनाचे तोंड कोणत्या दिशेला होते?

One evening before sunset Reena and Heena were talking to each other face to face. If Heena's shadow was exactly to the right of Heena, in which direction was Reena facing?

ایک مرتبہ شام کے وقت سورج غروب ہونے سے پہلے رینا اور ہینا آمنے سامنے ایک دوسرے سے باتیں کر رہیتھیں- اگر ہینا کی پرچھائیں ہیما کے بالکل داہنی طرف پڑ رہی تھی تو رینا کس سمت میں دیکھ رہی تھی؟

A.पूर्व
A.East
A.مشرق

B.पश्चिम
B.West
B.مغرب

C.उत्तर
C.North
C.شمال

D.दक्षिण
D.South
D.جنوب

Answer: D.दक्षिण
D.South
D.جنوب

80 DIRECTIONS: A sentence with an underlined phrasal verb is given below. Out of the four options, choose the one which can be substituted for the given phrasal Verb.
Kevin asked Julia out for the Promenade concert.

A.invited

B.threw out of

C.rejected

D.deprived

Answer: A.invited

81	Out of the four alternatives, choose the one which can be substituted for the given words/sentence. A person who abstains from alcoholic drinks
	A.Teetotaller
	B.Bilingual
	C.Optimist
	D.Gay
Answer:	A.Teetotaller

82	पुढील जोडशब्द पूर्ण करा . ‘ लुळा ----------’
	A.लंगडा
	B.पांगळा
	C.आंधळा
	D.खुळा
Answer:	B.पांगळा

83	पाण्याचे रासायनिक घटक कोणते आहेत? What are the chemical constituents of water? پانی کے کیمیائی اجزاء کیا ہیں؟
	A.नायट्रोजन A.Nitrogen A. نائٹروجن
	B.हायड्रोजन B.Hydrogen B. ہائیڈروجن
	C.ऑक्सिजन C.Oxygen C. آکسیجن

D.हायड्रोजन आणि ऑक्सिजन दोन्हीही
D.Both hydrogen and oxygen
D. ہائیڈروجن اور آکسیجن دونوں

Answer:
D.हायड्रोजन आणि ऑक्सिजन दोन्हीही
D.Both hydrogen and oxygen
D. ہائیڈروجن اور آکسیجن دونوں

84

सूचना: दिलेल्या पर्यायांमधून वेगळे ते बाहेर काढा.

DIRECTIONS: Find the odd one out from the given alternatives.

سمت: دیے گئے متبادل میں سے بے جوڑ کو تلاش کرو۔

A.4422
A.4422
A.4422

B.2442
B.2442
B.2442

C.4242
C.4242
C.4242

D.2244
D.2244
D.2244

Answer:
C.4242
C.4242
C.4242

85

लोकसभेमध्ये आदेश पालनाचा अंतिम अधिकार याच्यासोबत असतो:

The final power to maintain order in Lok Sabha vests with:

پارلیمینٹ میں امن برقرار رکھنے کے لیے حتمی طاقت دی گئی ہے

A.गृहाचा मुख्य अधिकारी
A.Marshal of the house
A.ہائوس آف مارشل

B.सुरक्षा कर्मचाऱ्यांचे प्रमुख
B.Chief of the security staff
B. سیکورٹی عملے کے چیف

C.सभापती
C.Speaker
C. اسپیکر

D.पंतप्रधान
D.Prime Minister
D. وزیراعظم

Answer: C.सभापती
C.Speaker
C. اسپیکر

86 जर $2x + 3y = 68$ आणि $\frac{x+y}{y} = 1\frac{5}{8}$, $6y + 7x$ चे मूल्य काढा:

If $2x + 3y = 68$ and $\frac{x+y}{y} = 1\frac{5}{8}$, find the value of $6y + 7x$:

اگر $2x + 3y = 68$ اور $\frac{x+y}{y} = 1\frac{5}{8}$ تو $6y + 7x$ کی قیمت معلوم کریں:

A. 166

B. 98

C. 197

D. 168

Answer: A. 166

87 सूचना: खालील पाच विधाने (P), (Q), (R), (S) आणि (T) यांची योग्य क्रमामध्ये पुन्हा आखणी करा जेणेकरून अर्थपूर्ण परिच्छेद तयार होईल; आणि मग खाली दिलेल्या प्रश्नांची उत्तरे लिहा.

P. सरते शेवटी फक्त तिला आनंदी करण्यासाठी, भगवान कृष्णांनी तिला बांधण्यासाठी परवानगी दिली.
Q.तिने तसे करण्यासाठी दोरी आणली, पण तिला समजले की ती खूपच छोटी आहे.
R.लवकरच तिला समजले की तिच्या मुलामध्ये काहीतरी जादू आहे.
S.एके दिवशी, कृष्णाच्या खोड्यांना कंटाळून, त्यांच्या आई यशोदेने त्यांना बांधायचे ठरवले.
T.तिने खूप मोठी आणली पण ती सुद्धा लहान झाली, त्यानंतर तिने आणखी मोठी आणली पण तिने देखिल बांधायला ती असमर्थ ठरली

पूनर्नियोजन केल्यावर कोणते विधान त्रितीय असावे?

DIRECTION: Rearrange the following five sentences (P), (Q), (R), (S) and (T) in the proper sequence to form a meaningful paragraph; then answer the questions given below them.

P. Finally Lord Krishna allowed her to tie him up, just to make her happy.
Q. She brought a rope to do so, but realized it was very small.
R. Soon she realized that there is something miraculous about her son.
S. One day, tired of Shri Krishna’s mischief, his mother Yashoda decided to tie him up.
T. She got a bigger one but it turned out to be small too, then she got yet another one but was unable to tie him.

Which of the following should be the THIRD sentence after rearrangement?

ہدایات: ان پانچ جملوں (P)، (Q)، (R)، (S) اور (T) کو با معنی پیرا بنانے کے لئے دوبارہ ترتیب دیجئے، پھر نیچے دے گئے سوالوں کے جواب دیجئے

P. آخر بھگوان کرشن نے انکو خد کو باندھنے کی اجازت دی۔صرف انکو خشی دینے کے لئے
Q.وہ ایک رسی لائیں،پھر انکو احساس ہوا کی وہ بہت چھوٹی ہے۔
R.تھوڑی دیر میں انکو سمجھ آگیا کی انکا بیٹا معجزانہ طور پر خاص ہے۔
S.ایک دن شری کرشنا کی شرارتوں سےتنگ آکرانکی ماں یشودہ نے انکو باندھ نے کا فیصلا کیا۔
T.وہ بڑی رسی لائی مگر وہ بھی چھوٹی نکلی۔پھر وہ اور بڑی لائیں مگر وہ بیٹے کو باندھنے سے ناکامیاب رہی۔

ان میں سے کون سا جملہ تیسرے نمبر کا جملہ ہوگا۔

A.T
A.T
A.T

B.R
B.R
B.R

C.P
C.P
C.P

D.S
D.S
D.S

Answer: A.T
A.T
A.T

88 यापैकी कोणती आकृती रुग्णालय, परिचारिका आणि रुग्ण यांच्या दरम्यानचे नाते उत्तमरित्या दर्शवते?

Which of the following diagrams indicates the best relation between Hospital, Nurse and Patient ?

مندرجہ ذیل ڈایاگراموں میں سے کونسی ہسپتال، نرس اور مریض کے درمیان بہترین تعلقات کا اشارہ ہے؟

(A) 

(B) 

(C) 

(D) 

Answer: (C) 

89 **सूचना**: एकाच फाशाच्या चार अवस्था दाखविल्या आहेत, तर 6 ठिपके असणाऱ्या बाजूच्या विरुद्ध बाजूवर किती ठिपके असतील?

From the given four positions of a single dice, find the number of dots at the face opposite to the face having 6 dots.

ہدایات: ایک پاسہ کی دی گئی چار حالتوں میں سے، ایک پاسہ کے منہ پر نقطوں کی گنتی کو دریافت کیجیئے، جس کے سامنےوالے پاسہ کے منہ پر 6 نقطہ ہے؟

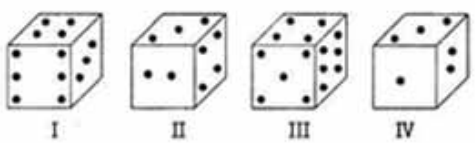

A. 2

B. 4

C. 5

D. 6

Answer: A. 2

90 सूचना: खालील पाच विधाने (P), (Q), (R), (S) आणि (T) यांची योग्य क्रमामध्ये पुन्हा आखणी करा जेणेकरून अर्थपूर्ण परिच्छेद तयार होईल; आणि मग खाली दिलेल्या प्रश्नांची उत्तरे लिहा.

P. सरते शेवटी फक्त तिला आनंदी करण्यासाठी, भगवान कृष्णांनी तिला बांधण्यासाठी परवानगी दिली.
Q.तिने तसे करण्यासाठी दोरी आणली, पण तिला समजले की ती खूपच छोटी आहे.
R.लवकरच तिला समजले की तिच्या मुलामध्ये काहीतरी जादू आहे.
S.एके दिवशी, कृष्णाच्या खोड्यांना कंटाळून, त्यांच्या आई यशोदेने त्यांना बांधायचे ठरवले.
T.तिने खूप मोठी आणली पण ती सुद्धा लहान झाली, त्यानंतर तिने आणखी मोठी आणली पण तिने देखिल बांधायला ती असमर्थ ठरली.

पूनर्नियोजन केल्यावर कोणते विधान प्रथम असावे?

DIRECTION: Rearrange the following five sentences (P), (Q), (R), (S) and (T) in the proper sequence to form a meaningful paragraph; then answer the questions given below them.

P. Finally Lord Krishna allowed her to tie him up, just to make her happy.
Q. She brought a rope to do so, but realized it was very small.
R. Soon she realized that there is something miraculous about her son.
S. One day, tired of Shri Krishna's mischief, his mother Yashoda decided to tie him up.
T. She got a bigger one but it turned out to be small too, then she got yet another one but was unable to tie him.

Which of the following should be the FIRST sentence after rearrangement?

ہدایات: ان پانچ جملوں (P)، (Q)، (R)، (S) اور (T) کو با معنی پیرا بنانے کے لئے دوبارہ ترتیب دیجئے، پھر نیچے دے گئے سوالوں کے جواب دیجئے

P. آخر بھگوان کرشن نے انکو خد کو باندھنے کی اجازت دی۔صرف انکو خشی دینے کے لئے
Q.-وہ ایک رسی لائیں،پھر انکو احساس ہوا کی وہ بہت چھوٹی ہے
R.-تھوڑی دیر میں انکو سمجھ آگیا کی انکا بیٹا معجزانہ طور پر خاص ہے
S.-ایک دن شری کرشنا کی شرارتوں سےتنگ آکرانکی ماں یشودہ نے انکو باندھ نے کا فیصلا کیا
T.-وہ بڑی رسی لائی مگر وہ بھی چھوٹی نکلی۔پھر وہ اور بڑی لائیں مگر وہ بیٹے کو باندھنے سے ناکامیاب رہی

ان میں سے کون سا جملہ پہلے نمبر کا جملہ ہوگا۔

A.S
A.S
A.S

B.P
B.P
B.P

C.Q
C.Q
C.Q

D.R
D.R
D.R

Answer: A.S
A.S
A.S

91 पुरेसे शिक्षण अनुभवाची कसोटी ही आहे

The criterion of adequate learning experience is—

—کافی سیکھنے کے تجربے کا معیار ہے

A.शिक्षण अनुभव थेट शिक्षण उद्दिष्टांशी संबंधित आहेत का?
A.Are the learning experiences directly associated with teaching objectives?
A.کیا سیکھنے کے تجربات براہ راست تدریس کے مقاصد سے متعلق ہیں؟

B.शिकण्याचा अनुभव विद्यार्थ्यांना अर्थपूर्ण आणि समाधानकारक वाटत का?
B.Are the learning experiences meaningful and satisfying to the students?
B.کیا سیکھنے کے تجربات معالج اور طالب علموں کو مطمئن کرتے ہیں؟

C.शिकण्याचे अनुभव विद्यार्थ्यांच्या परिपक्वता पातळीनुसार आहेत का ?
C.Are these learning experiences according to the maturity level of the students?
C.کیا یہ تجربات طالب علموں کی پختگی کی سطح کے مطابق ان کو سیکھانے کے ہیں؟

D.वरील सर्व
D.All the above
D.مذکورہ تمام

Answer: D.वरील सर्व
D.All the above
D.مذکورہ تمام

92 जर 26 जानेवारी, 1904 रोजी शुक्रवार असेल, तर 9 जून 1904 रोजी काय वार असेल?

If Friday fall on 26 January, 1904, What will be the day of 9 June 1904?

اگر 26 جنوری 1904 کو جمعہ پڑ رہا ہو، 9 جون 1904 کو کونسا دن ہوگا؟

A.शुक्रवार
A.Friday
A.جمعہ

B.शनिवार
B.Saturday
B.سنیچر

C.रविवार
C.Sunday
C.اتوار

D.सोमवार
D.Monday
D.پیر

Answer: C.रविवार
C.Sunday
C.اتوار

93 निर्देश: मालिका पूर्ण करा

X, V, T, R, P, N, ?

DIRECTION: Complete the series

X, V, T, R, P, N, ?

ہدایت اس سرج کو مکمّل کرو

X, V, T, R, P, N, ?

A.U
A.U
A.U

B.M
B.M
B.M

For More Info And Videos About TAIT-Exam Syllabus And Other Exam Visit My Channel
TAIT च्या 30 प्रश्नपत्रिका PDF Available Request 9765226781 BADSHAHimp
WWW.YouTube.com/BADSHAHimp Subscribe My Channel

C.J
C.J
C.J

D.L
D.L
D.L

Answer: D.L
D.L
D.L

94 **सूचना:** खालील प्रश्नात असे 3 घटक आहेत ज्यांचा परस्परांशी विशिष्ट संबंध आहे. समान संबंध वर्तुळाच्या संचांनी दर्शविलेला आहे, प्रत्येक वर्तुळ त्याचा आकार कितीही असला तरी, एका घटकाचे प्रतिनिधित्व करते. योग्य वर्तुळाच्या संचांशी खालील घटकांच्या जोड्या लावा.

DIRECTION: The question below has three items having certain relationship among them. The same relationship is expressed by sets of circles, each circle representing one item irrespective of its size. Match the items with right set of circles.

ہدایت: مندرجہ ذیل سوال میں تین آئٹم ہیں جن کے مابین مختلف تعلقات ہیں۔ دائروں کے ایک سیٹ کے ذریعہ یکساں تعلق ظاہر کیا جاتا ہے، ہر دائرہ سائز سے قطع نظر ایک آئٹم کی نمائندگی کرتا ہے۔ آئٹم کو دائروں کے درست سیٹ کے ساتھ ملائیں۔

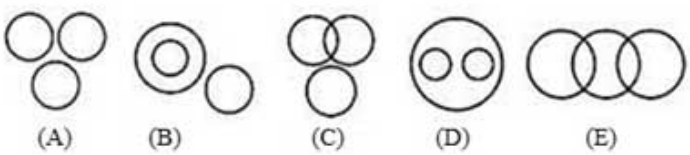

पुस्तक, अध्याय, पेन

Book, Chapter, Pen

کتاب، باب، قلم

A. (A)

B. (B)

C. (C)

D. (D)

Answer: B. (B)

For More Info And Videos About TAIT-Exam Syllabus And Other Exam Visit My Channel
TAIT च्या 30 प्रश्नपत्रिका PDF
BADSHAHimp Available Request 9765226781
WWW.YouTube.com/BADSHAHimp
Subscribe My Channel

95

विधान:
X राज्यात बलात्कार खटले वाढत आहेत.

कृतीचा कोर्स:
I. मुलींसाठी लग्नाचे वय कमी करा.
II. बायकांचा आदर करण्यास पुरुषांना शिकवा.

Statement:
Rape cases are increasing in State X.

Course of actions:
I. Reduce the age of marriage for girls.
II. Teach men to respect women

بیان:
X ریاست میں ریپ کیسز میں اضافہ ہو رہا ہے۔

لائحہ عمل:
I۔لڑکیوں کی شادی کی عمر کم کر دیں
II۔ مردوں کو خواتین کی عزت کرنا سکھائیں ۔

A.फक्त I अनुसरून आहे
A.Only I follows
A. صرف I لاگو ہو گا۔

B.फक्त II अनुसरण करते आहे
B.Only II follows
B. صرف II لاگو ہو گا۔

C.एकतर I किंवा II अनुसरून आहे
C.Either I or II follows
C. I یا II میں سے ایک لاگو ہو گا۔

D.I किंवा II दोन्हीपैकी काहीही अनुसरण करत नाही
D.Neither I nor II follows
D. I اور II میں سے کوئی بھی لاگو نہیں ہو گا۔

Answer:

B.फक्त II अनुसरण करते आहे
B.Only II follows
B. صرف II لاگو ہو گا۔

For More Info And Videos About TAIT-Exam Syllabus And Other Exam Visit My Channel
TAIT च्या 30 प्रश्नपत्रिका PDF
BADSHAHimp Available Request 9765226781
WWW.YouTube.com/BADSHAHimp
Subscribe My Channel

96 MILLSTONE' पासून खालील शब्दांपैकी कोणते शब्द तयार केले जाऊ शकत नाहीत?

Which of the following words cannot be formed from 'MILLSTONE'?

مندرجہ ذیل الفاظ میں سے کونسا 'MILLSTONE' سے نہیں بنایا جاسکتا ہے؟

A.MILLION
A.MILLION
A.MILLION

B.LEMON
B.LEMON
B.LEMON

C.SOME
C.SOME
C.SOME

D.MIST
D.MIST
D.MIST

Answer: A.MILLION
A.MILLION
A.MILLION

97 सूचना: दिलेल्या पर्यायांमधून वेगळे ते बाहेर काढा.

DIRECTIONS: Find the odd one out from the given alternatives.

سمت: دیے گئے متبادل میں سے بے جوڑ کو تلاش کرو۔

A.CDE
A.CDE
A.CDE

B.DEF
B.DEF
B.DEF

C.EFG
C.EFG
C.EFG

D.HIJ
D.HIJ
D.HIJ

Answer: D.HIJ
D.HIJ
D.HIJ

98 सूचना : खालील दिलेल्या प्रश्नामध्ये काही विधाने आणि काही निष्कर्ष आहेत. सामन्यात: ज्ञात तथ्यांपेक्षा ते वेगळे असतील तर दिलेली विधाने तुम्हाला सत्य मानवी लागतील आणि त्यानंतर दिलेल्या विधानाचे अनुकरण दिलेल्यापैकी कोणता निष्कर्ष तार्किकदृष्ट्या करतो ते ठरवा.

विधाने :
G > R ≥ E = A ≤ T ≤ S
निष्कर्ष :
I. E>G
II. A ≤S

DIRECTIONS: In the question given below, there are few statements followed by few conclusions. You have to take the given statements to be true even if they seem to be at variance with commonly known facts and then decide which of the given conclusion logically follow(s) from the given statements.

Statements:
G > R ≥ E = A ≤ T ≤ S
Conclusions:
I. E > G
II. A ≤ S

ہدایات: مندرجہ ذیل سوال میں، کچھ بیانات کے بعد کچھ نتائج موجود ہیں. اگر آپ کو عام طور پر جانے جاتے حقائق کے ساتھ بھی متغیر ہونے لگے تو بھی آپ دئے گئے بیانات دماغ میں رکھیں اور پھر اس بات کا فیصلہ کریں کہ ذیل میں دیا گیا کونسا نتیجہ منطقانہ طور پر دیے گئے بیانات کی پیروی کرتا ہے.

بیانات:

نتائج:
E>G .I
A ≤S .II

A.फक्त II निष्कर्ष खरा आहे
A.Only conclusion II is true
A.صرف نتیجہ II درست ہے

B.फक्त I निष्कर्ष खरा आहे
B.Only conclusion I is true
B.صرف نتیجہ I درست ہے

C.I किंवा II यापैकी एक निष्कर्ष खरा आहे
C.Either conclusion I or II is true
C.یا I یا II نتیجہ درست ہے

D.I व II हे दोन्हीही निष्कर्ष खरे नाहीत
D.Neither conclusion I nor II is true
D.نتیجہ درست ہے II نہ ہی I نہ ہی

Answer: A.फक्त II निष्कर्ष खरा आहे
A.Only conclusion II is true
A.درست ہے II صرف نتیجہ

99 अक्कल दाढ आहे-

Wisdom Teeth is

عقل کا دانت ----- ہے-

A.आठवी दाढ
A. Eighth Molar teeth
A.آٹھواں داڑھ کا دانت

B.चौथी दाढ
B. Fourth molar teeth
B.چوتھا داڑھ کا دانت

C.पहिली दाढ
C. First molar teeth
C.پہلا داڑھ کا دانت

D.तिसरी दाढ
D. Third molar teeth
D.تیسرا داڑھ کا دانت

Answer: D.तिसरी दाढ
D. Third molar teeth
D.تیسرا داڑھ کا دانت

100 Out of the given options which best expresses the meaning of the given Proverb?
Don't count your chickens before they hatch.

A.If you keep hens then there is no need to see how many chickens are hatched each day

B.Don't make plans based on predicted results that haven't occurred yet

C.If we count the hatched chickens then their number decreases

D.Do not sell all the chickens that are hatched at a time

Answer:	B.Don't make plans based on predicted results that haven't occurred yet

101	Out of the given options, choose the one which is the correct direct speech of the sentence given below. My teacher often says to me that if I don't work hard I shall fail.
	A.My teacher often said to me, “If you didn't work hard, you shall fail.”
	B.My teacher often says to me, “If you don't work hard, you will fail.”
	C.My teacher often said to me, “If you doesn't work hard, you will fail.”
	D.My teacher often said to me, “If you don't work hard, you will fail.”
Answer:	B.My teacher often says to me, “If you don't work hard, you will fail.”

102 सूचना: प्रत्येक प्रश्नाला एक प्रमुख विधानासोबत चार विधाने आहेत ज्यांच्याखाली A, B, C, आणि D असे चार विधान आहेत. क्रमवार विधानांची जोडी निवडा ज्यामध्ये प्रथम विधान दुसऱ्या विधानाला सुचवते, आणि दोन्ही विधाने तर्किकदृष्ट्या प्रमुख विधानासोबत निगडित असेल.

ती एकतर शिक्षिका आहे किंवा लिपिक आहे
A. ती शिक्षिका आहे.
B. ती शिक्षिका नाही.
C. ती एक लिपिक आहे.
D. ती लिपिक नाही.

DIRECTIONS: Each question has a main statement followed by four statements labelled A, B, C and D. Choose the ordered pair of statements, where the first statement implies the second, and the two statements are logically consistent with the main statement.

She is either a teacher or a clerk.
A. She is a teacher
B. She is not a teacher
C. She is a clerk
D. She is not a clerk

ہدایت: ہر سوال میں ایک جملہ ہے جسکے بعد چار جملےاے، بی،سی اور ڈی کے نام سے دئے گئے ہیں اسمیں منسلک جوڑیوں کو چنئے۔ جہاں پہلا جملہ دوسرے جملہ کی اور اشارہ کر رہا ہے اور دو جملے منطقی مرکزی بیان کے مطابق ہیں

وہ یا تو ایک ٹیچر ہے یا ایک کلرک
A۔ وہ ٹیچر ہے
B۔ وہ ٹیچر نہیں ہے
C۔ وہ کلرک ہے
D۔ وہ کلرک نہیں ہے

A.AC
A.AC
A.AC

B.DA
B.DA
B.DA

C.CB
C.CB
C.CB

D.AB
D.AB
D.AB

Answer: B.DA
B.DA
B.DA

103 TV पाहताना, अमर आपल्या मित्राला म्हणतो, “कॅप घातलेला हा मुलगा माझ्या बहीणीच्या पतीचा एकुलता मुलगा आहे. मग अमर आणि त्या मुलाचे नाते काय?

While watching TV, Amar tells his friend, “That boy with the cap is my sister’s husband's only son. How is Amar related to that boy?

TV دیکھتے ہوئے ،عامر نے دوست سے کہا، " وو ٹوپی لگاکے لڑکا میری بہن کے شوہر کا بیٹا ہے. عامر کا لڑکے سے کیا رشتہ تھا؟

A.मेव्हणा
A.Brother-in-law
A.جی جا

B.मामा
B.Maternal uncle
B.ماما

C.चुलतभाऊ
C.Nephew
C.بتیجا

D.भाऊ
D.Brother
D.بھائی

Answer: B.मामा
B.Maternal uncle
B.ماما

104 इको-मार्क एका भारतीय उत्पादनास दिले आहे जे आहे

Eco-Mark is given to an Indian product which is

ایکو مارک کسی ہندوستانی مصنوعات کو دیا جاتا ہے جو کی

A.प्रोटीन युक्त
A.Rich in protein
A. پروٹین سے مالا مال ہو

B.वातावरणाला अनुकूल
B.Environment-friendly
B. ماحول کے مطابق ہو

C.आर्थिकदृष्ट्या व्यवहार्य
C.Economically viable
C. اقتصادی طور پر قابل عمل ہو

D.शुद्ध आणि निष्पाप
D.Pure and unadulterated
D. پاک اور خالص ہو

Answer: B.वातावरणाला अनुकूल
B.Environment-friendly
B. ماحول کے مطابق ہو

105 सामाजिक केंद्रकीयन आणि संप्रेषणामध्ये अडचण म्हणजे

Difficulty in social nucleation and communication is

سماجی تشکیل اور رابطے میں پریشانی کی وجہ _____ ہے۔

A.अलोगिया
A.Alogia
A. الوگیا

B.आवेगशिलता
B.Impulsivity
B.غوروفکر کی محرومی

C.अतिक्रियाशिलता
C.Hyperactivity
C.حیپراکتیوتے

D.स्वमग्नता
D.Autism
D.(آٹزم گردوپیش سے بے خبری اور بیرونی دنیا سے الگ تھلگ رہنے کی ذہنی کیفیت)

Answer: D.स्वमग्नता
D.Autism
D.(آٹزم گردوپیش سے بے خبری اور بیرونی دنیا سے الگ تھلگ رہنے کی ذہنی کیفیت)

106	ओढ (मेनिया) हे आहे Mania is جنون ہے
	A.आत्यंतिक विकार A.Obsessive disorder A.حاوی ہونے کی خرابی
	B.मूड विकार B.Mood disorder B.مزاج کی خرابی
	C.मज्जातंतूंचा विकार C.Neurotic disorder C.اعصابی خرابی
	D.मानसिक विकार D.Psychological disorder D.نفسیاتی بیماری
Answer:	B.मूड विकार B.Mood disorder B.مزاج کی خرابی

107	Out of the given options, choose the most appropriate one to fill in the blank. The boy_____ the ball.
	A.caught
	B.have caught
	C.have catch
	D.has catch
Answer:	A.caught

108	गुणाकार करा: 256 × 212 = ? Multiply: 256 × 212 = ? ضرب دیں: 256 × 212= ?
	A.45242 A.45242 A.45242
	B.54272 B.54272 B.54272
	C.42532 C.42532 C.42532
	D.56363 D.56363 D.56363
Answer:	B.54272 B.54272 B.54272
109	दिलेल्या अपूर्ण संख्येचे टक्क्यांमध्ये रुपांतर करा. :- 8/40 Convert the given fractional number into percent :- 8/40 دئے ہوئےجزوی نمبر 8/40 کوفیصد میں تبدیل کیجئے؟
	A.25% A.25% A.25%

B.20%

B.20%

B.20%

C.40%

C.40%

C.40%

D.30%

D.30%

D.30%

Answer: B.20%

B.20%

B.20%

110 सरळ रूप द्या: 812932 – 486321 = ?

Simplify: 812932 – 486321 = ?

سادہ بنائیں:
812932 – 486321= ?

A.326611
A.326611
A.326611

B.325611
B.325611
B.325611

C.324611
C.324611
C.324611

D.316611
D.316611
D.316611

Answer: A.326611
A.326611
A.326611

111 **सूचना**: खालील प्रश्नात दिलेल्या पर्यायांमधून नातेसंबंध असणारी आकृती शोधून काढा.

DIRECTIONS: In the question below, select the related figure from the given altematives.

ہدایات: نیچے دیئے گئے سوال میں، دیئے گئے متبادلات میں سے متعلق متبادل چنئے

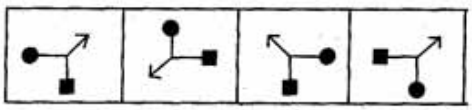

A. (A)

B. (B)

C. (C)

D. (D)

Answer: A. (A)

112 खालीलपैकी शुद्ध वाक्य कोणते ?

A.दिनेशच्या वागण्यावरून माधवचा संशय खरा ठरला.

B.दिनेशच्या वागण्यासाठी माधवचा संशय खरा ठरला.

C.दिनेशला वागण्यामधे माधवचा संशय खरा ठरला.

D.दिनेशला वागण्यावरून माधवचा संशय खरा ठरला.

Answer: A.दिनेशच्या वागण्यावरून माधवचा संशय खरा ठरला.

113	$(3.03)^3$ चे मूल्य काढा? Find the value of $(3.03)^3$? $(3.03)^3$ کی قیمت معلوم کریں؟
	A.17.818127 A.17.818127 A.17.818127
	B.27.818127 B.27.818127 B.27.818127
	C.37.818126999999997 C.37.818126999999997 C.37.818126999999997
	D.47.818126999999997 D.47.818126999999997 D.47.818126999999997
Answer:	B.27.818127 B.27.818127 B.27.818127
114	सहजभावाचा शैक्षणिक महत्त्व ह्यात आहे The Educational significance of the instincts is in — —جبلت کی تعلیمی اہمیت اس میں ہے
	A.प्रेरणा A.Motivation A.ترغیب
	B.आवड निर्माण करणे B.Interest-making B.دلچسپی پیدا کرنا
	C.सर्जनशीलता वाढविणे C.Promoting creativity C.تخلیق کو فروغ دی
	D.वरील सर्व D.All of the above D.مذکورہ تمام

Answer:	D.वरील सर्व D.All of the above D.مذکورہ تمام

115	खालीलपैकी अशुद्ध शब्द कोणता ?
	A.जीवन्मुक्त
	B.जीवन
	C.जियारत
	D.जीव्हाळा
Answer:	D.जीव्हाळा

116	निर्देश: दिलेल्या अंक मालिकेतील चुकीची संज्ञा शोधा: 10, 16, 48, 320, 4864, 154628 DIRECTIONS: Find the wrong term in the given number series: 10, 16, 48, 320, 4864, 154628 ہدایت دے گئے نمبرس سرج مے غلط نمبر کھوجے 10, 16, 48, 320, 4864, 154628
	A.154628 A.154628 A.154628
	B.4864 B.4864 B.4864
	C.320 C.320 C.320
	D.16 D.16 D.16

Answer: A.154628
A.154628
A.154628

117 खालीलपैकी कोणती व्यवस्था सामग्रीच्या घटकांच्या विरोधात आहे

Which one of the following arrangement is against the content’s elements?

مندرجہ ذیل ترتیب میں سے کون سا عناصر کے مواد کے خلاف ہے؟

A.ज्ञात पासून अज्ञात पर्यंत
A.From known to unknown
A.نامعلوم سے معلوم تک

B.साध्या पासून विकत पर्यंत
B.From simple to complex
B.سادہ سے پیچیدہ تک

C.ठोस पासून गोषवारा पर्यंत
C.From concrete to abstract
C.ایبسٹریکٹ سے کنکریٹ تک

D.ज्ञाना पासून अंधारा पर्यंत
D.From knowledge to darkness
D.علم سے اندھیرے تک

Answer: D.ज्ञाना पासून अंधारा पर्यंत
D.From knowledge to darkness
D.علم سے اندھیرے تک

118 शारीरिक उत्तेजनाच्या अती निम्न पातळीला प्रतिसाद देण्याची प्रवृत्ती

Tendency to respond to very low levels of physical stimulation

جسمانی محرک کی بہت نچلی سطح کی جانب توجہ کرنے کا رجحان ہے:

A.संवेदनशिलता
A.Sensitivity
A.حساسیت

B.उत्तेजन
B.Stimulus
B.محرک ،مہیج

C.कामगिरी
C.Performance
C.کار کردگی

D.यापैकी एकही नाही
D.None of these
D.ان میں سے کوئی نہیں

Answer: A.संवेदनशिलता
A.Sensitivity
A.حساسیت

119 2 च्या पहिल्या दोन गुणितांची सरासरी आहे:

The average of first two multiples of 2 is:

2کے پہلے دو ملٹی پلز کا اوسط ہے

A.3
A.3
A.3

B.5
B.5
B.5

C.7
C.7
C.7

D.9
D.9
D.9

Answer: A.3
A.3
A.3

120 Out of the given four words only one is spelt correctly. Find the word that is correctly spelt.

A.Caribbean

B.Farenheit

C.Enviroment

D.Floreyscent

Answer: A.Caribbean

121 कुठल्याही वस्तूच्या गुणधर्मात प्रवेशासाठी वापरले जाणारे माऊस तंत्र-

Mouse technique used for access in properties of any object is—

_____ کسی بھی شے کی پراپرٹی میں رسائی حاصل کرنے کے لئے استعمال ہونے والا ماوس تکنک ہے

A.ड्रॅगिंग
A.Dragging
A.گھسیٹنا

B.ड्रॉपिंग
B. Dropping
B.ڈراپ کرنا

C.उजवे क्लिक
C. Right clicking
C.دائیں جانب کلک کرنا

D.शिफ्ट क्लिक
D. Shift clicking
D.شفٹ کلک کرنا

Answer: C.उजवे क्लिक
C. Right clicking
C.دائیں جانب کلک کرنا

122 **सूचना**: खालील प्रश्नात उत्तरातील पर्यायांपैकी कोणत्या पर्यायी आकृतीत प्रश्नातील आकृती अंतर्भूत आहे?

DIRECTIONS: In the given question find the answer figure in which question figure is embedded.

ہدایات: دیئے گئے سوال میں جواب والی شکل دریافت کیجیئے جس میں سوال والی شکل سرایت کرگئی ہے

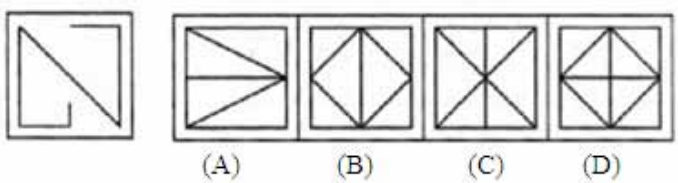

A. (A)

B. (B)

C. (C)

D. (D)

Answer: C. (C)

123

खालील आकृतीमध्ये किती त्रिकोण आहेत?

How many triangles are there in the following figure?

نیچے دی گئے شکل میں کتنے مثلث ہیں؟

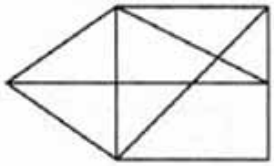

A. 12

B. 14

C. 15

D. 13

Answer: C. 15

124

वडीलांचे वय हे त्यांच्या मुलाच्या वयाच्या सात पट आहे. 4 वर्षांनंतर त्यांच्या वयांची बेरीज 56 वर्षे होईल. मुलाचे वर्तमान वय काय आहे (वर्षांमध्ये)?

The age of a father is seven times his son's age. After 4 years sum of their ages is 56 years. What is the present age of the son (in years)?

والد کی عمر اپنے بیٹے کی عمر کے 7 گنا ہے۔4 سال بعد اُن کی مجموعی عمر 56 سال ہو گی۔ بیٹے کی موجودہ عمر (سالوں میں)کیا ہے؟

A.8
A.8
A.8

B.6
B.6
B.6

C.5
C.5
C.5

D.10
D.10
D.10

Answer: B.6
B.6
B.6

125 प्रक्रिया ज्या द्वारे व्यक्ती आपने शारीरिक आणि मानसिक संतुलन मध्ये समतोल आणतो ते ओळखले जाते

The process by means of which the individual attempts to maintain a level of physiological and psychological equilibrium is known as—

جسمانی اور نفسیاتی مساوات کی سطح کو برقرار رکھنے کے لئے انفرادی کوششوں کے ذریعہ کیا جانے والا عمل جانا جاتا ہے—

A.समायोजन
A.Adjustment
A.ایڈجسٹمنٹ

B.समायोजन यंत्रणा
B.Adjustment mechanism
B.ایڈجسٹمنٹ کا میکانزم

C.होमोस्टेटिक
C.Homeostatic
C.ہومیوسٹیٹک

D.प्रतिक्रिया-निर्मिती
D.Reaction-formation
D.ردعمل کی تشکیل

Answer: A.समायोजन
A.Adjustment
A.ایڈجسٹمنٹ

126 AP 14, 28, 42 …… च्या कोणत्या अनुक्रमाचे पद 168 आहे ?

Which term of the AP: 14, 28, 42 …… is 168?

14, 28, 42 …… 168 ہے س سرج کی کونسی ٹرم?

A.10वे
A.10th
A.10واں

B.11वे
B.11th
B.11واں

C.9वे
C.9th
C.9واں

D.12वे
D.12th
D.12واں

Answer: D.12वे
D.12th
D.12واں

127 मनीष उत्तरेला तोंड करुन 5 किमी चालत जातो. मग तो उजवीकडे वळतो आणि 3 किमी चालतो. आता तो डावीकडे वळतो आणि 2 किमी चालतो. तो पुन्हा त्याच्या डाव्या बाजूला वळतो आणि 3 किमी चालतो. तर मनीष त्याच्या सुरुवातीच्या ठिकाणापासून किती दूर आहे?

Manish faces towards North and walks 5 km. Then he turns to right and walks 3 km. Now he turns left and walks 2 km. He again turns to his left and walks 3 km. How far is Manish from his starting point?

منیش شمال کی طرف رخ کرتا ہے اور 5 کلومیٹر چلتا ہے۔ پھر وہ دائیں طرف مڑتا ہے اور 3 کلومیٹر چلتا ہے۔ اب وہ بائیں مڑتا ہے اور 2 کلومیٹر چلتا ہے۔ وہ دوبارہ اپنے بائیں طرف مڑتا ہے اور 3 کلومیٹر چلتا ہے۔ منیش اپنے شروعاتی نقطہ سے کتنی دور ہے؟

A.3 किमी
A.3 km
A.3 کلومیٹر

B.7 किमी
B.7 km
B.7 کلومیٹر

C.4.5 किमी
C.4.5 km
C.4.5 کلومیٹر

D.8 किमी
D.8 km
D.8 کلومیٹر

Answer: B.7 किमी
B.7 km
B.7 کلومیٹر

128 फोटोमधील एका स्त्रीकडे बोट दाखवून रेणुका म्हणते, "ती या मुलाची आई आहे, ज्याचे वडील माझे भाऊ आहेत ". मग रेणुकाचे त्या स्त्रीसोबत नाते काय?

Pointing to a lady in a photograph Renuka said, "She is the mother of the boy, whose father is my brother". How is Renuka related to that lady?

تصویر میں عورت کی طرف اشارہ کرکے رینوکا نے کہا،" یہ لڑکے کی ماں ہے، جسکا باپ میرا بھائی ہے". رینوکا کا اس عورت سے کیا رشتہ تھا؟

A.बहीण
A.Sister
A.بہن

B.पुतणी
B.Niece
B.بھتیجی

C.चुलत बहीण
C.Cousin
C.چچا زاد

D.सून
D.Sister-in-law
D.بھابی

Answer: D.सून
D.Sister-in-law
D.بھابی

129 शरीरावर सरासरी किती प्रतिशत ऑक्सिजनचा घटक असतो?

On the average, what percentage of human body has the element of oxygen?

اوسطا، انسانی جسم کے کتنے فیصد میں آکسیجن کا عنصر ہوتا ہے؟

A.65
A.65
A.65

B.25
B.25
B.25

C.10
C.10
C.10

D.5
D.5
D.5

Answer: A.65
A.65
A.65

130 संयुक्त राष्ट्र संघटनेचे मुख्यालय येथे आहे –

The United Nations Organization has its Headquarters at –

اقوام متحدہ کے صدر دفاتر _____ میں ہیں۔

A.न्यू यॉर्क
A.New York
A.نیو یارک

B.कोपनहेगन
B.Copenhagen
B.کوپن ہیگن

C.पॅराग्वे
C.Prague
C.پریگ

D.दि हॅग्वे
D.The Hague
D.ہیگ

Answer: A.न्यू यॉर्क
A.New York
A.نیو یارک

131 ‘ ती त्याची पिशवी आहे. ’ या वाक्यातील विशेषण ओळखा.

A.ती

B.त्याची

C.पिशवी

D.आहे

Answer: B.त्याची

132 एक मूल या वयाचे असल्यास त्याला तान्हे बाळ म्हंटले जाईल

A child will be called a toddler if he is in the age group of

ایک بچہ کو ٹوڈلر کہا جائے گا اگر وہ عمر گروپ کا ہے

A.0 - 10 महिने
A.0 - 10 months
A.0-10 مہینے

B.12-36 महिने
B.12-36 months
B.12-36 مہینے

C.36 महिने - 4 वर्षे
C.36 months - 4 years
C.36 مہینے سے4 سال

D.36 महिने- 6 वर्षे
D.36 months - 6 years
D.36 مہینے تا 6 سال

Answer: B.12-36 महिने
B.12-36 months
B.12-36 مہینے

133 एका रांगेत शिखर पाठीमागून नवव्या क्रमांकावर आहे. पुढून आठव्या क्रमांकावर अरुण आहे. दोघांमध्ये निखिल उभा आहे. रांगेत उभे असणाऱ्या मुलांची किमान संख्या किती ?

In a queue, Shikhar is ninth from the back. Arun’s place is eighth from the front. Nikhil standing between the two. What could be the minimum number of boys standing in the queue?

ایک کتار میں، شیکھر پیچھے سے نواں ہے، ارون کہ مقام اگے سے آٹھواں ہے. نخل دونوں کے درمیان ہے. کتار میں کم سے کم کتنے لڑکے ہونگے؟

A.8
A.8
A.8

B.9
B.9
B.9

C.12
C.12
C.12

D.14
D.14
D.14

Answer: B.9
B.9
B.9

134 ‘ वारंवार ’ या शब्दाचा विरुद्धार्थी शब्द कोणता ?

A.कधीतरी

B.सतत

C.वरचेवर

D.नेहमी

Answer: A.कधीतरी

135 पुढील म्हण पूर्ण करा - ‘ नाचता येईना ---------- वाकडे.’

A.मंच

B.अंगण

C.पाय

D.बोट

Answer: B.अंगण

136 जेव्हा एखाद्या विद्यार्थ्याला स्मृती स्तरावर प्रभुत्व प्राप्त होते, तेव्हा विद्यार्थ्यांची शिकवण स्वत: ह्यात रूपांतरित होते

When a student gets mastery over Memory level, the learning of a student should be automatically converted into—

جب ایک طالب علم یاداشت کی سطح میں مہارت حاصل کرتا ہے تو، ایک طالب علم کے سیکھنے کو خود کار طریقے سے تبدیل ہونی چاہئے—

A.समजणे
A.Understanding
A.تفہیم

B.विचार करणे
B.Thinking
B.سوچ

C.कल्पना करणे
C.Imagination
C.تخیل

D.संश्लेषण करणे
D.Synthesis
D.ترکیب

Answer: A.समजणे
A.Understanding
A.تفہیم

137 श्रम न करता खाणारा -

A.खादाड

B.रिकामटेकडा

C.ऐतखाऊ

D.सावकार

Answer: C.ऐतखाऊ

138	सूचना: दिलेल्या पर्यायांमधून वेगळे ते बाहेर काढा. DIRECTIONS: Find the odd one out from the given alternatives. سمت: دیے گئے متبادل میں سے بے جوڑ کو تلاش کرو۔
	A.वॉक A.Walk A.چہل قدمی
	B.टॉक B.Talk B.بولنا
	C.ड्रिंक C.Drink C.پینا
	D.प्लँक D.Plank D.تختہ
Answer:	D.प्लँक D.Plank D.تختہ

139	‘ इत्यादी ’ या शब्दाची संधी सोडवा.
	A.इत् + यादी
	B.इति + यादी
	C.इती + यादी
	D.इति + आदी
Answer:	D.इति + आदी

140 निर्देश: खाली दिलेले प्रश्न वर्ण मालिकेवर आधारित आहेत. या प्रत्येक मालिकेत, काही अक्षरे गहाळ आहेत. योग्य पर्याय निवडा पाच पेक्षा अधिक अक्षरे गहाळ असल्यास, मालिकेतील शेवटचे पाच अक्षरे निवडा .

- - f - hi - - l - no - - - s - - --

DIRECTION: Questions given below are based on the letter series. In each of these series, some letters are missing. Select the correct alternative. If more than five letters are missing, select the last five letters of the series:

- - f - hi - - l - no - - - s - - -

ہدایت نیچے دے ہے سوالات حرف سرج پر مشتمل ہیں . ہر میں کہیں حرف گمشدہ ہے . سہی اختیارات کو چنے . اگر پچ حرف گنمام ہو تو آخری پانچ حرفونکو چنے

- - f - hi - - l - no - - - s - - -

A.rstqp
A.rstqp
A.rstqp

B.tsrqp
B.tsrqp
B.tsrqp

C.wxyza
C.wxyza
C.wxyza

D.यापैकी एकही नाही
D.None of these
D.ان میں سے کوئی نہیں

Answer: C.wxyza
C.wxyza
C.wxyza

141 सूचना: खालील प्रश्नांमध्ये दिलेल्या पर्यायांमधून संबंधित अक्षर/शब्द/संख्या निवडा.

LOCKER : KERLOC : SOCKER : ?

DIRECTIONS: In the following question, select the related letter/word/number from the given alternatives.

LOCKER : KERLOC : SOCKER : ?

سمت: مندرجہ ذیل سوال میں، دیے گئے متبادل سے متعلقہ حرف/لفظ/نمبر منتخب کریں۔

LOCKER : KERLOC : SOCKER : ?

A.KSOCER
A.KSOCER
A.KSOCER

B.KERSOC
B.KERSOC
B.KERSOC

C.SOCKRE
C.SOCKRE
C.SOCKRE

D.KRSOCE
D.KRSOCE
D.KRSOCE

Answer: B.KERSOC
B.KERSOC
B.KERSOC

142 प्राध्यापक अमर्त्य सेन यांना या क्षेत्रामध्ये नोबेल पुरस्कार मिळाला आहे –

Professor Amartya Sen received the Nobel Prize in this field of –

پروفیسر امرتیاسین کو _____ کے میدان مین نوبل انعام ملا

A.साहित्य
A.Literature
A.ادب

B.भौतिकशास्त्र
B.Physics
B.فیزکس

C.अर्थशास्त्र
C.Economics
C. معاشیات

D.रसायनशास्त्र
D.Chemistry
D.کمسٹری

Answer: C.अर्थशास्त्र
C.Economics
C. معاشیات

143 मुलांच्या भाषेच्या विकासामध्ये पुरेसा हातभार लावणारी संस्था आहे

The important agency giving adequate contribution in child's language development is—

— اہم ادارہ جو بچے کی زبان کی ترقی میں مناسب کردار ادا کرتا ہے، وہ

A.कुटुंब
A.Family
A.خاندان

B.शाळा
B.School
B.اسکول

C.जनसंपर्क
C.Mass media
C.ماس میڈیا

D.मासिके
D.Magazines
D.میگزین

Answer: A.कुटुंब
A.Family
A.خاندان

144 सूचना: खालील माहिती काळजीपूर्वक वाचा आणि खालील प्रश्नांची उत्तरे द्या:
A, B, C, D, E, F, G आणि H केंद्रासमोर बघत एका वर्तुळात बसलेले आहेत. D हा H च्या उजव्या बाजूला चौथा आणि B च्या डावीबाजूला दुसरा आहे. F हा B च्या उजव्या बाजूला चौथा आहे. C हा E च्या उजव्या बाजूला चौथा आहे जो, B किंवा D च्या तत्काळ डावीला नाही. A हा D चा तात्काळ शेजारी नाही.
A च्या उजवीकडून तिसरा कोण आहे?

DIRECTIONS: Study the following information carefully and answer the questions given below:
A, B, C, D, E, F, G and H are sitting around a circle facing the centre. D is fourth to the right of H and second to the left of B. F is fourth to the right of B. C is fourth to the right of E who is not an immediate right of B or D. A is not an immediate neighbour of D.
Who is third to the right of A?

ہدایات: مندرجہ ذیل معلومات کو دھیان سے پڑھیں اور نیچے دیے گئے سوالوں کے جواب دیں۔
A، B، C، D، E، F، G اور H مرکز کی طرف رخ کیے ہوئے ایک دائرے کے ارد گرد بیٹھے ہیں۔ D، H کے دائیں سے چوتھا اور B کے بائیں سے دوسرا ہے۔ F، B کے دائیں سے چوتھا ہے جو C، E کے دائیں سے چوتھا ہے۔ D یا B کے دائیں سے چوتھا ہے جو A، D کا فوری پڑوسی نہیں ہے۔
A کے دائیں طرف سے تیسرا کون ہے؟

A.H
A.H
A.H

B.E
B.E
B.E

C.F
C.F
C.F

D.अपुरी माहिती
D.Data inadequate
D.ڈیٹا ناکافی ہے

Answer: C.F
C.F
C.F

145

सूचना: खालील प्रश्नात कागदाच्या एक तुकड्याला प्रश्नातील आकृतीत दाखविल्याप्रमाणे घडी घातली आहे. उत्तरादाखल पर्यायांमधून अशी आकृती निवडा जी भोक पडल्यानंतर उलगडलेल्या कागदाचे स्वरूप दाखवेल.

DIRECTIONS: In the following question a piece of paper is folded in the manner shown in the question figure(s). Select the figure out of the answer choices showing the unfolded pattern after the punches (cut).

ہدایات: نیچے دیئے گئے سوالوں میں کاغذ کا ایک ٹکڑا اس طرح جوڑا گیا ہے جیسے سوال کی شکل میں بتایا گیا ہے، دیئے گئے جوابات کے اختیارات میں سے اس طرح انتخاب کیجیئے کہ کٹ لگانے کے بعد بغیر جوڑا ہوا پیٹرن دکھائی دے۔

Question Figures

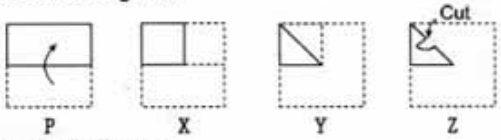

Answer Figures

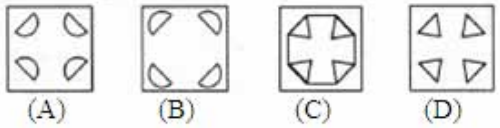

A. (A)

B. (B)

C. (C)

D. (D)

Answer: A. (A)

146

एक व्यक्तीला विशिष्ट वेळेमध्ये विशिष्ट ठिकाणी पोहचायचे आहे आणि जर तो 4 किमी/तास या गतीने चालला तर 15 मिनिटे उशीरा पोहचेल आणि जर तो 6 किमी/तास गतीने चालला तर तो 10 मिनिटे आधी पोहचेल हे त्याला समजले. त्याला कापायचे अंतर काढा.

A person has to reach a certain place at a certain time and he finds that he will be 15 minutes late if he walks at 4 km/hour and 10 minutes earlier, if he walks at 6km/hour. Find the distance he has to cover.

کسی شخص کو ایک مخصوص وقت پر ایک خاص جگہ تک پہنچنا ہے اور اسے احساس ہوتا ہے کہ اگر وہ 4 کلومیٹر / گھنٹے کی رفتار سے چلتا ہے تو اسے 15 منٹ دیر ہو گی اگر وہ 6 کلومیٹر / گھنٹے کی رفتار سے چلے تو وہ 10 منٹ قبل پہنچ جائے گا۔ فاصلہ معلوم کریں جو اسے طے کرنا ہے

A.3 किमी
A.3 km
A.3 کلومیٹر

B.4 किमी
B.4 km
B.4 کلومیٹر

C.5 किमी
C.5 km
C.5 کلومیٹر

D.6 किमी
D.6 km
D.6 کلومیٹر

Answer: C.5 किमी
C.5 km
C.5 کلومیٹر

147 1.08, 0.36 आणि 0.9 चा मसावी?

The HCF of 1.08, 0.36 and 0.9 is?

1.08، 0.36 اور 0.9 کے ایچ سی ایف کیا ہے؟

A.0.03
A.0.03
A.0.03

B.0.9
B.0.9
B.0.9

C.0.18
C.0.18
C.0.18

D.0.108
D.0.108
D.0.108

Answer: C.0.18
C.0.18
C.0.18

148 शिकवण्याच्या संदर्भात पाठांतर करणे सर्वात लाभदायक दिसून येते जेव्हा

Recitation in learning appears most profitable when introduced—

سیکھنے میں پڑھنا سب سے زیادہ فائدہ مند ہوتا ہے جب متعارف کرایا جائے—

A.शिकण्याच्या काळाच्या सुरुवातीस
A.At the beginning of the learning period
A.سیکھنے کی مدت کے آغاز میں

B.शिक्षण कालावधी संपूर्ण एकसारखेपणा
B.Uniformity throughout the learning period
B.سیکھنے کی مدت مینمسلسل یکسانیت

C.शिक्षण कालावधी शेवटी
C.Toward the end of the learning period
C.سیکھنے کی مدت کے اختتام کی جانب

D.केवळ चाचणी कालावधीसाठी तयारी म्हणून
D.Only as preparation for the testing period
D.صرف جانچ کی مدت کے لئے تیاری کے طور پر

Answer:

C.शिक्षण कालावधी शेवटी
C.Toward the end of the learning period
C.سیکھنے کی مدت کے اختتام کی جانب

149 सूचना: प्रत्येक प्रश्नाला एक प्रमुख विधानासोबत चार विधाने आहेत ज्यांच्याखाली A, B, C, आणि D असे चार विधान आहेत. क्रमवार विधानांची जोडी निवडा ज्यामध्ये प्रथम विधान दुसऱ्या विधानाला सुचवते, आणि दोन्ही विधाने तर्किकदृष्ट्या प्रमुख विधानासोबत निगडित असेल.
तो एकतर व्यस्त आहे किंवा रिकामा आहे.

A. तो रिकामा आहे.
B. तो रिकामा नाही.
C. तो व्यस्त आहे.
D. तो व्यस्त नाही.

DIRECTIONS: Each question has a main statement followed by four statements labelled A, B, C and D. Choose the ordered pair of statements, where the first statement implies the second, and the two statements are logically consistent with the main statement.

He is either busy or free.
A. He is free
B. He is not free
C. He is busy
D. He is not busy

ہدایت: ہر سوال میں ایک جملہ ہے جسکے بعد چار جملےاے، بی،سی اور ڈی کے نام سے دئے گئے ہیں اسمیں منسلک جوڑیوں کو چنئے۔ جہاں پہلا جملہ دوسرے جملہ کی اور اشارہ کر رہا ہے اور دو جملے منطقی مرکزی بیان کے مطابق ہیں

وہ یا تو مصروف ہے یا فارغ
A۔ وہ فارغ ہے
B۔ وہ فارغ نہیں ہے
C۔ وہ مصروف ہے
D۔ وہ مصروف نہیں ہے

A.AC
A.AC
A.AC

B.DA
B.DA
B.DA

C.CB
C.CB
C.CB

D.AB
D.AB
D.AB

Answer: B.DA
B.DA
B.DA

150 मूल्यांकन उपयुक्त आहे

Evaluation is helpful —

— تقویم مددگار ہے

A.शाळांची परिस्थिती सुधारण्यासाठी
A.For improving the conditions of the school
A.اسکول کی حالت کو بہتر بنانا

B.उपक्रम संबंधित सामग्री जाणून घेण्यासाठी
B.For knowing content related activities
B.مواد سے متعلقہ سرگرمیوں کو جاننا

C.शिक्षणाच्या वेगवेगळ्या परिमाण संबंधित माहिती गोळा करण्यासाठी
C.For collecting information related to the different dimensions of teaching
C.تعلیم کے مختلف پہلوؤں سے متعلق معلومات جمع کرنا

D.वरील सर्व
D.All the above
D.مذکورہ تمام

Answer: D.वरील सर्व
D.All the above
D.مذکورہ تمام

151 खालीलपैकी कोणते रसायन आंबे पिकविण्यासाठी वापरली जातात?

Which of the following chemicals are used for ripening of mangoes?

مندرجہ ذیل کیمیکلز میں سے کونسا آم کو پکانے کے لیے استعمال کیا جاتا ہے؟

A.कॅल्शियम कार्बोनेट
A.Calcium carbonate
A. کیلشیم کاربونیٹ

B.कॅल्शियम हायड्रॉक्साइड
B.Calcium hydroxide
B. کیلشیم ہائڈراآکسائڈ

C.कॅल्शियमकार्बाइड
C.Calcium carbide
C. کیلشیم کاربائڈ

D.कॅल्शियम क्लोराईड
D.Calcium chloride
D. کیلشیم کلورائد

Answer: C.कॅल्शियमकार्बाइड
C.Calcium carbide
C. کیلشیم کاربائڈ

152 ‘दांडीया’ या कोणाचा प्रसिध्द नृत्य प्रकार आहे –

‘Dandia’ is a popular dance form of –

'ڈانڈیا' _____ کی ایک مقبول ڈانس کی شکل ہے'

A.महाराष्ट्र
A.Maharashtra
A.مہاراشٹرا

B.गुजरात
B.Gujarat
B.گجرات

C.उत्तर प्रदेश
C.Uttar Pradesh
C.اترپردیش

D.छत्तीसगढ
D.Chhattisgarh
D.چھتیس گڑھ

Answer: B.गुजरात
B.Gujarat
B.گجرات

153 ‘ ऐदी ‘ या शब्दाचा समानार्थी शब्द कोणता ?

A.कष्टाळू

B.परिश्रमी

C.सुस्त

D.कामसू

Answer: C.सुस्त

154 $\frac{1+729}{1-9+81}=?$

A. 25

B. 20

C. 10

D. 30

Answer: C. 10

155 $(1570)^2 + (1571)^2 + (1572)^2 + (1573)^2$ संख्येच्या एकक स्थानचा अंक?

The digit in unit's place of the number $(1570)^2 + (1571)^2 + (1572)^2 + (1573)^2$ is?

$2(1573) + 2(1572) + 2(1571) + 2(1570)$ عدد میں یونٹ پلیس کا ہندسہ کیاہے؟

A.4
A.4
A.4

B.1
B.1
B.1

C.2
C.2
C.2

D.3
D.3
D.3

Answer: A.4
A.4
A.4

156 सूचना : खालील प्रत्येक प्रश्नात दोन विधाने I आणि II दिलेले आहेत. हे विधान एकतर स्वतंत्र कारण असू शकतात किंवा स्वतंत्र कारणांचे परिणाम असू शकतात. यांपैकी एक विधान इतर विधानाचा परिणाम असू शकतो. दोन्ही विधाने वाचा आणि खालीलपैकी कोणत्या उत्तराचा पर्याय या दोन्ही विधानांमधील संबंधांचे वर्णन करतो ते ठरवा.

विधान :
I. शासकीय रुग्णालयांची गुणवत्ता सतत कमी होत आहे.
II. खाजगी रुग्णालयांची संख्या सातत्याने वाढत आहे.

DIRECTIONS: Below in each question are given two statements I and II. These statements may be either independent causes or may be effects of independent causes. One of these statements may be the effect of the other statement. Read both the statements and decide which of the following answer choice correctly depicts the relationship between these two statements.

Statements:
I. The quality of government hospitals has been steadily decreasing.
II. The number of private hospitals has been steadily increasing.

ہدایات: نیچے ہر سوال میں دو بیانات I اور II آ تو یہ بیانات یا ان دیے گئے ہیں۔ آزاد وجوہات یا پھر آزاد وجوہات کے اثرات ہو سکتے ہیں۔ بیانات میں سے ایک بیان دوسرے کا اثر ہو سکتا ہے۔دونوں بیانات پڑھیں اور فیصلہ کریں کہ نیچے دیے گئے کس جواب کا انتخاب ان دونوں بیانات کے در میان تعلق کو ٹھیک سے ظاہر کرتا ہے۔

بیانات:
I – سرکاری ہسپتالوں کا معیار تیزی سے گر رہا ہے۔
II - پرائیویٹ ہسپتالوں کی تعداد میں مسلسل اضافہ ہو رہا ہے۔

A.विधान I कारण आहे आणि विधान II त्याचा परिणाम आहे;
A.Statement I is the cause and statement II is its effect;
A.بیان نمبر I وجہ ہے اور بیان نمبر II اس کا اثر ہے۔

B.विधान II कारण आहे आणि विधान I त्याचा परिणाम आहे;
B.Statement II is the cause and statement I is its effect;
B.بیان نمبر II وجہ ہے اور بیان نمبر I اس کا اثر ہے۔

C.विधान I आणि II दोन्ही स्वतंत्र कारणे आहेत;
C.Both the statements I and II are independent causes;
C.دونوں بیانات نمبر I اور نمبر II آزاد وجوہات ہیں۔

D.विधान I आणि II दोन्ही स्वतंत्र कारणांचे परिणाम आहेत;
D.Both the statements I and II are effects of independent causes;
D. دونوں بیانات نمبر I اور نمبر II آزاد وجوہات کے اثرات ہیں۔

Answer: A.विधान I कारण आहे आणि विधान II त्याचा परिणाम आहे;
A.Statement I is the cause and statement II is its effect;
A.بیان نمبر I وجہ ہے اور بیان نمبر II اس کا اثر ہے۔

157 एस्परर्जर सिंड्रोममधील अपात्रतेचा त्रिकोण_____ आहे.

The triad of impairments in Asperger's syndrome is

:ایسپرجرس سنڈروم' میں نُقص کا تکون ہے'

A.अडचण ओळखणे, स्मृतिभ्रंश, अलोजिया
A.Difficulty identification, dementia, Alogia
A.شناخت میں دشواری، فتور دماغ، لسانی طلاقت میں کمی

B.सामाजिक संवाद, सामाजिक सुसंवाद, सामाजिक कल्पकता
B.Social communication, social interaction, social imagination
B.سماجی رابطہ، سماجی تعامل، سماجی تصور

C.ऐकण्यात, लक्ष केंद्रित करण्यात आणि बोलण्यात अडचणी
C.Difficulty hearing, concentrating & speaking
C.سماعت ، ترکیز اور بولنے میں دشواری

D.यापैकी एकही नाही
D.None of these
D.ان میں سے کوئی نہیں

Answer: B.सामाजिक संवाद, सामाजिक सुसंवाद, सामाजिक कल्पकता
B.Social communication, social interaction, social imagination
B.سماجی رابطہ، سماجی تعامل، سماجی تصور

158 **सूचना**: दिलेल्या चारांपैकी वेगळी (असंबद्ध) असणारी आकृती शोधून काढा.

DIRECTIONS: Find the odd from the given four figures.

ہدایات: دیئے گئے چار شکلوں میں طاق کونسی ہے۔

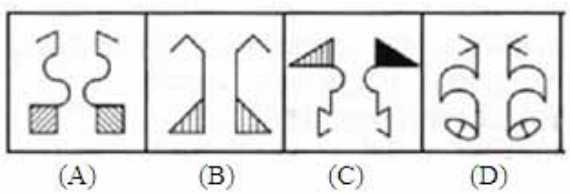

A. (A)

B. (B)

	C. (C)
	D. (D)
Answer:	C. (C)

159	प्रश्नासाठी सूचना: खालील मालिका पूर्ण करा. EA, IE, OK, SO, YU, _____ DIRECTION: Complete the following series. EA, IE, OK, SO, YU, _____ سوال کے لیے ہدایت:مندرجہ ذیل سیریز کو مکمل کریں۔ EA, IE, OK, SO, YU, _____
	A.WX A.WX A.WX
	B.WB B.WB B.WB
	C.YD C.YD C.YD
	D.CY D.CY D.CY
Answer:	D.CY D.CY D.CY

160	सूचना: दिलेल्या पर्यायांमधून वेगळे ते बाहेर काढा. DIRECTIONS: Find the odd one out from the given alternatives. سمت: دیے گئے متبادل میں سے بے جوڑ کو تلاش کرو۔
	A.मसूर A.Masoor A.مسور
	B.उडीद B.Urad B.ارد
	C.मूग C.Moong C.موگ
	D.बासमती D.Basmati D.باسمتی
Answer:	D.बासमती D.Basmati D.باسمتی

161 सूचना: प्रत्येक प्रश्नाला एक प्रमुख विधानासोबत चार विधाने आहेत ज्यांच्याखाली A, B, C, आणि D असे चार विधान आहेत. क्रमवार विधानांची जोडी निवडा ज्यामध्ये प्रथम विधान दुसऱ्या विधानाला सुचवते, आणि दोन्ही विधाने तर्किकदृष्ट्या प्रमुख विधानासोबत निगडित असेल.

जेव्हा मी जेवण तयार करतो/करते, तेव्हा मी कृत्रिम रंग वापरत नाही.
A. मी जेवण बनवले
B. मी जेवण बनवले नाही
C. मी कृत्रिम रंग वापरले नाही
D. मी कृत्रिम रंग वापरले

DIRECTIONS: Each question has a main statement followed by four statements labelled A, B, C and D. Choose the ordered pair of statements, where the first statement implies the second, and the two statements are logically consistent with the main statement.

When I make food ,I don’t use artificial colors
A. I made food
B. I did not make food
C. I did not use artificial colors
D. I used artificial colors

ہدایت: ہر سوال میں ایک جملہ ہے جسکے بعد چار جملےاے، بی،سی اور ڈی کے نام سے دئے گئے ہیں اسمیں منسلک جوڑیوں کو چنئے۔ جہاں پہلا جملہ دوسرے جملہ کی اور اشارہ کر رہا ہے اور دو جملے منطقی مرکزی بیان کے مطابق ہیں

میں کھانا بناتے ہوئے مصنوعی رنگ استعمال نہیں کرتی
Aمیں نے کھانا بنایا ۔
Bمیں نے کھانا نہیں بنایا ۔
Cمیں نے مصنوعی رنگ استعمال نہیں کیئے ۔
Dمیں نے مصنوعی رنگ استعمال کیئے ۔

A.AC
A.AC
A.AC

B.BC
B.BC
B.BC

C.DA
C.DA
C.DA

D.CD
D.CD
D.CD

Answer:	A.AC A.AC A.AC

162	Fill in the blank with the correct article. I learnt _____French at school.
	A.a
	B.an
	C.the
	D.No article required
Answer:	D.No article required

163 सूचना: प्रत्येक प्रश्नाला एक प्रमुख विधानासोबत चार विधाने आहेत ज्यांच्याखाली A, B, C, आणि D असे चार विधान आहेत. क्रमवार विधानांची जोडी निवडा ज्यामध्ये प्रथम विधान दुसऱ्या विधानाला सुचवते, आणि दोन्ही विधाने तर्किकदृष्ट्या प्रमुख विधानासोबत निगडित असेल.

जर आपण राष्ट्रीय ध्वजाचा आदर करतो, तर आपण आपल्या राष्ट्राचा आदर करतो
A. आपण राष्ट्रीय ध्वजाचा आदर करतो
B. आपण राष्ट्रीय ध्वजाचा आदर करत नाही
C. आपण आपल्या राष्ट्राचा आदर करतो
D. आपण आपल्या राष्ट्राचा आदर करत नाही

DIRECTIONS: Each question has a main statement followed by four statements labelled A, B, C and D. Choose the ordered pair of statements, where the first statement implies the second, and the two statements are logically consistent with the main statement.

If we respect national flag, we will respect our nation.
A. We respected national flag
B. We did not respect national flag
C. We respected our nation
D. We did not respect our nation

ہدایت: ہر سوال میں ایک جملہ ہے جسکے بعد چار جملےاے، بی،سی اور ڈی کے نام سے دئے گئے ہیں اسمیں منسلک جوڑیوں کو چنئے۔ جہاں پہلا جملہ دوسرے جملہ کی اور اشارہ کر رہا ہے اور دو جملے منطقی مرکزی بیان کے مطابق ہیں

اگر ہم قومی جھنڈے کی عزت کریں تو ہم اپنی قوم کی عزت کریں گے
Aکی - ہم نے قومی جھنڈے کی عزت
Bکی - ہم نے قومی جھنڈے کی عزت نہیں
Cکی - ہم نے اپنی قوم کی عزت
Dکی - ہم نے اپنی قوم کی عزت نہیں

A.AC
A.AC
A.AC

B.BC
B.BC
B.BC

C.DA
C.DA
C.DA

D.CD
D.CD
D.CD

Answer: A.AC
A.AC
A.AC

164 प्रश्न चिन्ह पुनर्स्थित करण्यासाठी उत्तर पर्यायांपैकी एक निवडा.

Select from answer choices a number to replace the question mark.

نیچے کے اختیارات سے کوئی نمبر کا جواب کھوجے .

5	11	8
11	13	12
6	?	7

A. 9

B. 8

C. 7

D. 10

Answer: B. 8

165 कोणती संख्या केवळ एका आकृतीमध्ये उपस्थित आहे?

Which number is present only in one figure?

کون سا نمبر صرف ایک ہی تصویر میں موجود ہے؟

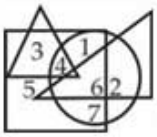

A. 1

B. 3

C. 5

D. 7

Answer: C. 5

166 सामग्री-विश्लेषण दरम्यान शिक्षक लक्ष देतात

During content-analysis a teacher focusses upon—

مواد کے تجزیہ کے دوران ایک استاد توجہ مرکوز کرتا ہے—

A.विषय
A.The topic
A.موضوع

B.उप-विषय
B.The sub-topic
B.ذیلی موضوع

C.सामग्री घटक
C.Content elements
C.مواد کے عناصر

D.वरील सर्व
D.All the above
D.مذکورہ تمام

Answer:

D.वरील सर्व
D.All the above
D.مذکورہ تمام

167 AB आणि CD या दोन समांतर रेषा आहेत. PQ ही AB आणि CD ला E आणि F मध्ये छेदते. EL हा ∠BEF चा दुभाजक आहे. जर ∠LEB = 35° तर ∠CFQ किती असेल:

AB and CD are two parallel lines. PQ cuts AB & CD at E & F respectively. EL is the bisector of ∠BEF. It ∠LEB = 35° then ∠CFQ will be:

AB اور CD دومتوازی لائنیں ہیں۔ PQ، AB اور CD کوبالترتیب E اور F پر کاٹتا ہے۔ EL قاطع ہے∠BEF کا۔ اس کا ∠LEB = 35° پھر∠CFQ ہو گا:

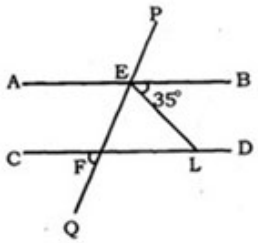

(A) 70°

(B) 110°

(C) 80°

(D) 90°

Answer: (B) 110°

168 खालीलपैकी अशुद्ध वाक्य कोणते ?

A.अरुण माझा थोरला मुलगा आहे.

B.विभा अरुणला लहान बहीण आहे.

C.प्रदीपचे काका शेतकरी आहेत.

D.विभाच्या आईचे नाव प्रभावती आहे.

Answer: B.विभा अरुणला लहान बहीण आहे.

169 सूचना: खालील माहिती काळजीपूर्वक वाचा आणि खालील प्रश्नांची उत्तरे द्या:
A, B, C, D, E, F, G आणि H केंद्रासमोर बघत एका वर्तुळात बसलेले आहेत. D हा H च्या उजव्या बाजूला चौथा आणि B च्या डावीबाजूला दुसरा आहे. F हा B च्या उजव्या बाजूला चौथा आहे. C हा E च्या उजव्या बाजूला चौथा आहे जो, B किंवा D च्या तत्काळ डावीला नाही. A हा D चा तात्काळ शेजारी नाही.
खालीलपैकी कोणत्या संयोजनात, तिसरी व्यक्ती ही पहिल्या आणि दुसऱ्या स्थानावरील व्यक्तींच्या मध्ये बसलेली आहे?

DIRECTIONS: Study the following information carefully and answer the questions given below:
A, B, C, D, E, F, G and H are sitting around a circle facing the centre. D is fourth to the right of H and second to the left of B. F is fourth to the right of B. C is fourth to the right of E who is not an immediate right of B or D. A is not an immediate neighbour of D.
In which of the following combinations is the third person sitting in between the first and the second persons?

ہدایات: مندرجہ ذیل معلومات کو دھیان سے پڑھیں اور نیچے دیے گئے سوالوں کے جواب دیں۔
A، B، C، D، E، F، G اور H مرکز کی طرف رخ کیے ہوئے ایک دائرے کے ارد گرد بیٹھے ہیں۔ D، H کے دائیں سے چوتھا اور B کے بائیں سے دوسرا ہے۔ F، B کے دائیں سے چوتھا ہے۔ C، E کے دائیں سے چوتھا ہے جو B یا D کے دائیں سے چوتھا نہیں ہے۔ A، D کا فوری پڑوسی نہیں ہے۔
مندرجہ ذیل مجموعوں میں سے کس میں تیسرا شخص پہلے اور دوسرے شخص کے درمیان بیٹھا ہے؟

A.ABC
A.ABC
A.ABC

B.GCD
B.GCD
B.GCD

C.AHE
C.AHE
C.AHE

D.CBA
D.CBA
D.CBA

Answer: B.GCD
B.GCD
B.GCD

170 जल शुद्धीकरण कोणत्या पद्धतीने सूक्ष्मजीव मारले जात नाहीत?

Which method of water purification does not kill microorganism?

پانی صاف کرنے کا کون سا طریقہ مائکرو آرگانزم کو ختم نہیں کرتا؟

A.उकळत्या
A.Boiling
A.ابالنا

B.गाळण्याची प्रक्रिया
B.Filtration
B. فلٹریشن

C.क्लोरीनीकरण
C.Chlorination
C. کلورین

D.युव्ही-प्रचरण
D.UV-irradiation
D. یووی شعاع ریزی

Answer: B.गाळण्याची प्रक्रिया
B.Filtration
B. فلٹریشن

171 सोळावी व्यक्तिमत्व घटक प्रश्नावली (16PP) यांच्याद्वारे विकसित केली गेली

Sixteen personality factor Questionnaire (16PP) was developed by

16) سولہ شخصیت فیکٹر سوالنامہ PP) کس نے بنایا؟

A.लाजरस
A.Lazarus
A.لزاورس

B.कॅटल
B.Cattell
B. کیٹل

C.आयसेंक्स
C.Eysenk’s
C. آئی سنکس

D.यापैकी एकही नाही
D.None of these
D.ان میں سے کوئی نہیں

Answer: B.कॅटल
B.Cattell
B. کیٹل

172 भारताच्या संरक्षित क्षेत्रामध्ये खालीलपैकी कोणत्या वर्गामध्ये स्थानिय लोकांना जीववस्तूभार गोळा करण्यास आणि वापरण्यास परवानगी नसते?

In which one among the following categories of protected areas in India are local people not allowed to collect and use the biomass?

مندرجہ ذیل اقسام میں سے بھارت میں ایک محفوظ مقام جہاں مقامی لوگوں کو بایو ماس جمعکرنے کی اجازت نہیں ہے

A.बायोस्फीअर रिजर्व
A.Biosphere Reserves
A. بایواسفیئر ریزرو

B.राष्ट्रीय उद्यान
B.National Parks
B. قومی پارک

C.रामसर अधिवेशना अंतर्गत घोषित पाणथळ जागा
C.Wetlands declared under Ramsar Convention
C. رامسر کنونشن کے تحت طےشدہ جھیلیں

D.वन्यजीव अभयारण्य
D.Wildlife Sanctuaries
D. وائلڈ لائف سینکچری

Answer: B.राष्ट्रीय उद्यान
B.National Parks
B. قومی پارک

173 सिआयई तोंडी समुह चाचणी ही बुद्धिमत्तेची चाचणी यांच्याद्वारे सांगितली गेली

CIE verbal group test of intelligence was given by

زبانی گروپ ٹسٹ برائے ذہانت _____ کے ذریعہ انجام پایا (CIE) سی آئی ای

A.उदय शंकर
A.Uday Shankar
A.اُدے شنکر

B.एम.सी. जोशी
B.M.C. Joshi
B.ایم۔سی۔جوشی

C.एस. जलोटा
C.S. Jalota
C.ایس۔ جلوٹا

D.एस.के. कुलश्रेष्ठ
D.S.K. Kulshreshtha
D.ایس۔کے کُلسریشتھا

Answer: A.उदय शंकर
A.Uday Shankar
A.اُدے شنکر

174 दिलेली अदलाबदल : चिन्हे आणि +, तसेच आकडे 7 आणि 5 ; तर 7 + 5 – 6 चे मूल्य किती ?

Given interchanges: signs – and +, and numbers 7 and 5; then the value of 7 + 5 – 6 is

دیئے گئے تبادلے: علامات - اور +، اور نمبر 7 اور 5؛ تو 7 + 5 – 6کی تعداد ہے

A.4
A.4
A.4

B.6
B.6
B.6

C.8
C.8
C.8

D.2
D.2
D.2

Answer: A.4
A.4
A.4

175 Out of the given four words only one is not spelt correctly. Find the word that is not correctly spelt.

A.Bizzare

B.Enemy

C.Exaggerate

D.Excellent

Answer: A.Bizzare

176 दोन त्रिकोणांच्या क्षेत्रफळांचे गुणोत्तर 4:3 आहे आणि त्यांच्या उंचीचे गुणोत्तर 3:4. त्यांच्या तळटीपाचे प्रमाण शोधा

The ratio of areas of two triangle is 4 :3 and ratio of their height is 3 :4. Find the ratio of their bases.

دو مثلث کے رقبے کا تناسب 3:4 اور انکی اونچائی 4:3ہے۔ ان کے اڈوں کا تناسب کو معلوم کریں۔

A.16:9
A.16:9
A.16:9

B.9:16
B.9:16
B.9:16

C.9:12
C.9:12
C.9:12

D.16:12
D.16:12
D.16:12

Answer: A.16:9
A.16:9
A.16:9

177 Out of the given options, choose the one which is the correct active voice of the sentence given below.
I am disappointed that an unrealistic policy has been adopted by the committee.

A.It has disappoint me that the committee has adopted a unrealistic policy.

B.It is disappointing to me that the committee has adopt an unrealistic policy.

C.It disappoints me that the committee has adopted an unrealistic policy.

D.It have been disappointing to me that the committee has adopted a unrealistic policy.

Answer: C.It disappoints me that the committee has adopted an unrealistic policy.

178 विशिष्ट सांकेतिक भाषेमध्ये, जर IMPORT हा शब्द KPRRTW असा कूटबध्द केला जात असेल, MISCHIEF म्हणून काय कूटबध्द केले जाईल?

In a certain code language if the word IMPORT is coded as KPRRTW, then what is coded as MISCHIEF?

ایک مخصوص ضابطے کی زبان میں، اگر لفظ IMPORT کو KPRRTW لکھا جاتا ہے، تو لفظ MISCHIEF کو کیا لکھاجائیگا؟

A.JFNVWVNM
A.JFNVWVNM
A.JFNVWVNM

B.OLUFJLGI
B.OLUFJLGI
B.OLUFJLGI

C.OLXIRVWY
C.OLXIRVWY
C.OLXIRVWY

D.KFNWVWNM
D.KFNWVWNM
D.KFNWVWNM

Answer: B.OLUFJLGI
B.OLUFJLGI
B.OLUFJLGI

179 जर त्रिकोणाचा एक कोन हा राहिलेल्या प्रत्येकी दोन कोनांपेक्षा 45° ने मोठा असेल, तर त्रिकोणाचे कोन काढा?

If one of the angles of a triangle is greater than each of the two remaining angles by 45°, then find the angles of triangle.

اگرایک مثل کے زاویوں میں سے ایک باقی دو زاویوں سے°45زیادہ ہے کو مثل کے زاویہ تلاش کریں؟

A.45°, 45°, 90°
A.45°, 45°, 90°
A.45°, 45°, 90°

B.90°, 45°, 90°
B.90°, 45°, 90°
B.90°, 45°, 90°

C.45°, 90°, 90°
C.45°, 90°, 90°
C.45°, 90°, 90°

D.45°, 55°, 80°
D.45°, 55°, 80°
D.45°, 55°, 80°

Answer: A.45°, 45°, 90°
A.45°, 45°, 90°
A.45°, 45°, 90°

180 कोणत्या पक्ष्यांचे डोळे त्यांच्या मेंदूपेक्षा लांब असतात?

Which birds eyes are larger than their brains?

کس پرندے کی آنکھیں اس کے دماغ سے بڑی ہیں؟

A.घुबड
A.Owl
A.الّو

B.पोपट
B.Parrot
B. توتا

C.शहामृग
C.Ostrich
C. شترمرغ

D.गरूड पक्षी
D.Eagle
D.باز

Answer: C.शहामृग
C.Ostrich
C. شترمرغ

181 आपण जर 12 काप करून घन कापले तर असे किती लहान घन मिळतात, जे X, Y आणि Z या तीन बाजूंमध्ये समान प्रकारे वितरीत आहेत?

How many small cubes are obtained when we cut the cube using 12 cuts, which are distributed evenly in the three planes X, Y and Z?

جب ہم کیوب میں 12 کٹ لگاتے ہیں تو، کتنے چھوٹے ٹکڑے حاصل ہوتے ہیں۔ جو ہوبہو تینوں پلینس میں ایک جیسے لگائے گئے ہوں۔

A.125
A.125
A.125

B.64
B.64
B.64

C.81
C.81
C.81

D.27
D.27
D.27

Answer: A.125
A.125
A.125

182 सूचना: या प्रश्नांमध्ये पर्याय A आणि B यांच्या सहित दोन विधाने दिलेली आहेत. जरी सामान्यपणे माहीत असलेल्या तथ्यांबरोबर जुळत नसले तरी खालील विधाने बरोबर आहेत असे समजून तुमचे योग्य उत्तर लिहा:
सर्व पेन बंदुका आहेत.
सर्व बंदुका शाईची दौत आहेत. म्हणून,
A: सर्व पेन शाईची दौत आहेत.
B: सर्व शाईची दौत पेन आहेत.

DIRECTION: In these questions, two statements are given, followed by two inferences A and B. Assume the statements to be true even if they are at variance with the known facts and then mark your answer as:

All pens are guns.
All guns are inkpots. So,
A: All pens are inkpots.
B: All inkpots are pens.

ہدایت:ان سوالات میں، دو بیانات دیے گئے ہیں، جن کے بعد دو تجاویز A اور B کو تسلیم کریں دیے گئے ہیں۔ بیانات کے درست ہونے اگرچہ وہ عام طور پر معلوم حقائق کے برعکس ہوں اور پھر اس کے مطابق اپنا جواب نشان زد کریں:

سبھی قلم بندوق ہیں۔
سبھی بندوق دوات ہیں۔ لہذا،

A: سبھی قلم دوات ہیں۔
B: سبھی دوات قلم ہیں۔

A.जर केवळ पर्याय (A) असल्यास.
A.If only inference (A) follows
A.صرف تجویز (A) پیروی کرتا ہے۔

B.जर केवळ पर्याय (B) असल्यास.
B.If only inference (B) follows
B.صرف تجویز (B) پیروی کرتا ہے۔

C.जर दोन्ही पर्याय (A) आणि (B) असल्यास.
C.If both (A) and (B) follow
C.(A) اور (B) دونوں پیروی کرتے ہیں۔

D.जर दोन्ही पर्याय (A) आणि (B) नसल्यास.
D.If neither (A) nor (B) follows
D.نہ تو (A) نہ ہی (B) پیروی کرتے ہیں۔

Answer: A.जर केवळ पर्याय (A) असल्यास.
A.If only inference (A) follows
A.صرف تجویز (A) پیروی کرتا ہے۔

183 आंतरिक प्रेरणा आहे

Internal motivation is—

اندرونی ترغیب ہے—

A.सकारात्मक
A.Positive
A.مثبت

B.नकारात्मक
B.Negative
B.منفی

C.वरील दोन्ही
C.Both the above
C.اوپر کے دونوں

D.वरीलपैकी काहीही नाही
D.None of the above
D.اوپر سے کوئی بھی نہیں

Answer: A.सकारात्मक
A.Positive
A.مثبت

184 DIRECTIONS: A sentence with an underlined phrasal verb is given below. Out of the four options, choose the one which can be substituted for the given phrasal Verb.
The inmates of the house have not been able to hang together in times of adversity.

A.argue endlessly

B.fight with one another

C.remain united

D.remain dissatisfied

Answer: C.remain united

185 खालीलपैकी नपुंसकलिंगी शब्द ओळखा.

A.क्षुधा

B.क्षेत्र

C.क्षमा

D.क्षमता

Answer: B.क्षेत्र

186 सूचना: खालील प्रश्नांमध्ये दिलेल्या पर्यायांमधून संबंधित अक्षर/शब्द/संख्या निवडा.

हिरवा : रंग ::

DIRECTIONS: In the following question, select the related letter/word/number from the given alternatives.

Green : Colour ::

سمت: مندرجہ ذیل سوال میں، دیے گئے متبادل سے متعلقہ حرف/لفظ/نمبر منتخب کریں۔

ہرا : رنگ ::

A.पिंक : कार
A.Pink : Car
A.گلابی : کار

B.मुंग्या : कीटक
B.Ants : Insect
B.چینٹی : کیڑامکوڑا

C.वृक्ष : लाकूड
C.Tree : Wood
C.درخت : لکڑی

D.गवत : कीटकनाशक
D.Grass : Insecticide
D.گھاس : کیڑے مار دوا

Answer: B.मुंग्या : कीटक
B.Ants : Insect
B.چینٹی : کیڑامکوڑا

187 एसएडी आहे-

SAD is

ساڈ ہے

A.सेपरेशन एंग्जायटी डिसऑर्डर
A.Separation anxiety disorder
A.علیحدگی کی تشخیص کی خرابی کی شکایت

B.सेपरेशन एन्टीस्टिक डिसऑर्डर
B.Separation antistic disorder
B.علیحدگی کا سامنا کرنا پڑتا ہے

C.सीनाइल एंग्जायटी डिसऑर्डर
C.Senile anxiety disorder
C.سینائل تشویش خرابی کی شکایت

D.सबस्टानटीएल एंगर डिसऑर्डर
D.Substantial anger disorder
D. مضحکہ خیز خرابی کی خرابی

Answer:
A.सेपरेशन एंग्जायटी डिसऑर्डर
A.Separation anxiety disorder
A.علیحدگی کی تشخیص کی خرابی کی شکایت

188 बायोगॅसचा कच्चे माल म्हणजे काय?

What is the raw material of biogas?

بایوگیس کا خام مال کیا ہے؟

A.कोळसा
A.Coal
A.کوئلہ

B.पेट्रोलियम
B. Petroleum
B.پٹرولیم

C.डिझेल
C. Diesel
C.ڈیزل

D.गायीच शेण
D. Cow dung
D.گائے کا گوبر

Answer: D.गायीच शेण
D. Cow dung
D.گائے کا گوبر

189 ایک مخصوص مبلغ رقم پر مناف، $6\frac{1}{4}$ سال کے پورا ہونے پر 8/3خود مبلغ کے وقت کا تھا۔ تو کیا فیصد در لگایا گیا؟

The interest on a certain sum of money at the end of $6\frac{1}{4}$ years was $\frac{3}{8}$ times of the sum itself. What rate percent was charged?

$6\frac{1}{4}$ वर्षांच्या शेवटी विशिष्ट रकमेवरील व्याज हे त्या रकमेच्या $\frac{3}{8}$ आहे. किती टक्के दर आकारला गेला आहे?

A. 5%

B. 8%

C. 6%

D. 3%

Answer: C. 6%

190 **सूचना**: खालील आकृतीचे प्रतिबिंब शोधून काढा.

DIRECTIONS: Find the mirror image of the figure given below.

ہدایات: نیچے دیئے گئے شکل کی آئینہ معکوس شکل کیا ہوگی۔

मुख्य आकृती
Main Figure
اصل شکل

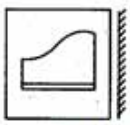

उत्तरासाठी पर्यायी आकृत्या
Answer Figure
جوابی شکل

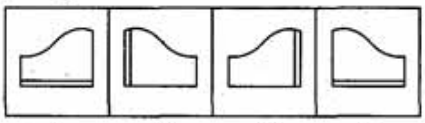

A. (A)

B. (B)

C. (C)

D. (D)

Answer: D. (D)

191 एका घनाकृतीच्या तीन अवस्था दाखविल्या आहेत. त्यांवर अवलंबून हे शोधून काढा की दिलेल्या घनाकृतीमध्ये 3 या अंकाच्या विरुद्ध बाजूला कोणता अंक असेल?

Three positions of a cube are given. Based on them, find out, which number is found opposite number 3 in a given cube?

ہدایات: ایک کیوب کی تین حالتیں دی گئی ہیں۔ ان کی بنیاد پر، دریافت کیجیئے، کونسا نمبرکیوب میں دیئے گئے 3 نمبر کی اپوسٹ ہے ؟



A. 2

B. 5

C. 4

D. 6

Answer: D. 6

192 सूचना: खालील माहिती काळजीपूर्वक वाचा आणि खालील प्रश्नांची उत्तरे द्या:
A, B, C, D, E, F, G आणि H केंद्रासमोर बघत एका वर्तुळात बसलेले आहेत. D हा H च्या उजव्या बाजूला चौथा आणि B च्या डावीबाजूला दुसरा आहे. F हा B च्या उजव्या बाजूला चौथा आहे. C हा E च्या उजव्या बाजूला चौथा आहे जो, B किंवा D च्या तत्काळ डावीला नाही. A हा D चा तात्काळ शेजारी नाही.
D च्या तत्काळ डावीकडे कोण आहे?

DIRECTIONS: Study the following information carefully and answer the questions given below:
A, B, C, D, E, F, G and H are sitting around a circle facing the centre. D is fourth to the right of H and second to the left of B. F is fourth to the right of B. C is fourth to the right of E who is not an immediate right of B or D. A is not an immediate neighbour of D.
Who is to the immediate left of D?

ہدایات: مندرجہ ذیل معلومات کو دھیان سے پڑھیں اور نیچے دیے گئے سوالوں کے جواب دیں۔
A، B، C، D، E، F، G اور H مرکز کی طرف رخ کیے ہوئے ایک دائرے کے ارد گرد بیٹھے ہیں۔ D، H، B کے دائیں سے چوتھا اور F، B کے بائیں سے دوسرا ہے۔ C، E کے دائیں سے چوتھا ہے جو B یا D کے دائیں سے چوتھا ہے۔ A، D کا فوری پڑوسی نہیں ہے۔
کے فوری بائیں طرف کون ہے؟ D

A.G
A.G
A.G

B.C
B.C
B.C

C.F
C.F
C.F

D.अपुरी माहिती
D.Data inadequate
D.ڈیٹا ناکافی ہے

Answer: A.G
A.G
A.G

193 खालीलपैकी कोणते कण नकारात्मक भारीत आहेत?

Which of the following particle is negatively charged?

مندرجہ ذیل میں سے کون کا ذرہ منفی چارج ہوتا ہے؟

A.प्रोटोन
A.Proton
A.پروٹون

B.न्युट्रॉन
B. Neutron
B.نیوٹرون

C.पाझिट्रॉन
C. Positron
C.پوزیٹرون

D.इलेक्ट्रॉन
D. Electron
D.الیکٹرون

Answer: D.इलेक्ट्रॉन
D. Electron
D.الیکٹرون

For More Info And Videos About TAIT-Exam Syllabus And Other Exam Visit My Channel
TAIT च्या 30 प्रश्नपत्रिका PDF Available Request 9765226781
WWW.YouTube.com/BADSHAHimp Subscribe My Channel
BADSHAHimp

194 सूचना: दिलेल्या पर्यायांमधून वेगळे ते बाहेर काढा.

DIRECTIONS: Find the odd one out from the given alternatives.

سمت: دیے گئے متبادل میں سے بے جوڑ کو تلاش کرو۔

A.सँडल
A.SANDAL
A.صندل

B.मोजे
B.SOCKS
B.موزے

C.हार
C.NECKLACE
C.ہار

D.जोडे
D.SHOES
D.جوتے

Answer: C.हार
C.NECKLACE
C.ہار

195 ‘ बेगडी ‘ या शब्दाचा समानार्थी शब्द कोणता ?

A.खरा

B.दिखाऊ

C.अस्सल

D.पाण्यातील मासा

Answer: B.दिखाऊ

196 $y^2+4y+3=0$ या वर्गसमीकरणाची मुळे आहेत:

The roots of the quadratic equation $y^2+4y+3=0$ are:

مربع مساوات کے روٹ $y^2+4y+3=0$ ہیں:

For More Info And Videos About TAIT-Exam Syllabus And Other Exam Visit My Channel
TAIT च्या 30 प्रश्नपत्रिका PDF
BADSHAHimp Available Request 9765226781
WWW.YouTube.com/BADSHAHimp
Subscribe My Channel

A.-3, -1
A.-3, -1
A.-3, -1

B.2, 1
B.2, 1
B.2, 1

C.3, 1
C.3, 1
C.3, 1

D.4, 1
D.4, 1
D.4, 1

Answer: A.-3, -1
A.-3, -1
A.-3, -1

197 खरेदी किमतीला विक्री करून 12.5% नफा मिळवण्यासाठी स्पिरीटमध्ये किती प्रमाणात पाणी मिसळले जावे?

In what proportion water be mixed with spirit to gain 12.5% by selling it at cost price?

اسپرٹ میں پانی کو کس تناسب سے ملایا جائے کہ اسے لاگتی قیمت پر فروخت کرنے سے 12.5%کا نفع حاصل ہو۔

A.3 : 5
A.3 : 5
A.3 : 5

B.1 : 8
B.1 : 8
B.1 : 8

C.2 : 7
C.2 : 7
C.2 : 7

D.1 : 9
D.1 : 9
D.1 : 9

Answer: B.1 : 8
B.1 : 8
B.1 : 8

For More Info And Videos About TAIT-Exam Syllabus And Other Exam Visit My Channel
TAIT च्या 30 प्रश्नपत्रिका PDF
BADSHAHimp Available Request 9765226781
WWW.YouTube.com/BADSHAHimp
Subscribe My Channel

198 अंकारा आणि इस्तांबुल ही शहरे येथे स्थित आहेत –

The cities of Ankara and Istanbul are situated in –

انقرہ اور استانبول شہر _____ میں واقع ہیں

A.लिबिया
A.Libya
A.لیبیا

B.कुवेत
B.Kuwait
B.کویت

C.सिरीया
C.Syria
C.شام

D.तुर्की
D.Turkey
D.ترکی

Answer: D.तुर्की
D.Turkey
D.ترکی

199 मानसिक लक्षणांच्या विकासासाठी आवश्यक असणाऱ्या मानसिक प्रक्रिया (तसेच संरक्षण यंत्रणा)

The psychological process (also defense mechanism) essential for the development of psychological symptoms

نفسیاتی عمل (دفاعی میکانزم بھی) نفسیات کی وہ علامات کی ترقی کے لئے لازم ہوتا ہے

A.दमन
A.Repression
A.گھٹن

B.परिक्रमण
B.Sublimation
B.ترفع

C.स्थिरण
C.Fixation
C.خبط

For More Info And Videos About TAIT-Exam Syllabus And Other Exam Visit My Channel
TAIT च्या 30 प्रश्नपत्रिका PDF Available Request 9765226781
BADSHAHimp
WWW.YouTube.com/BADSHAHimp
Subscribe My Channel

D.विस्थापन
D.Displacement
D.اصل جگہ سے منتقل کرنا

Answer: A.दमन
A.Repression
A.گھٹن

200

सूचना: दिलेल्या पर्यायांमधून श्रेणी पूर्ण करणारी योग्य आकृती निवडा.

DIRECTIONS: Complete the series by choosing right figure from the given choices.

ہدایات: دیئے گئے اختیارات میں صحیح شکل کا انتخاب کر کے سیریز کو مکمل کیجیئے۔

प्रश्न आकृत्या
Question Figures
سوالی شکل

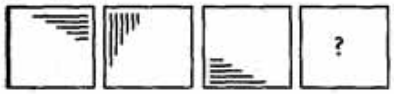

उत्तरासाठी पर्यायी आकृत्या
Answer Figures
جوابی شکل

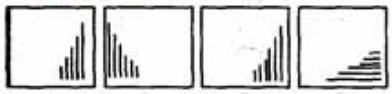

A. (A)

B. (B)

C. (C)

D. (D)

Answer: C. (C)

For More Info And Videos About TAIT-Exam Syllabus And Other Exam Visit My Channel
TAIT च्या 30 प्रश्नपत्रिका PDF
BADSHAHimp Available Request 9765226781
YouTube WWW.YouTube.com/BADSHAHimp
Subscribe My Channel

Question Paper Title : TAIT_PAPER_31

Date of Exam : 2017-12-18 16:00:00

1 Out of the given four words only one is spelt correctly. Find the word that is correctly spelt.

A.Glamorous

B.Goverment

C.Gaurd

D.Gaarantei

Answer: A.Glamorous

2 मुलींच्या रांगेत, शिल्पा डावीकडून 8 व्या स्थानावर आणि रीना उजवीकडून 17 व्या स्थानावर आहे. तर रांगेत एकूण मुली किती ?

In a row of girls, Shilpa is 8th from the left and Reena is 17th from the right. How many girls are there in the row?

لڑکیوں کی کتار میں، شلپا بھانیں سے 8 وی اور دھانیں سے 17 وی ہے. کتار میں کتنی لڑکیاں ہے؟

A.25
A.25
A.25

B.27
B.27
B.27

C.29
C.29
C.29

D.24
D.24
D.24

Answer: D.24
D.24
D.24

For More Info And Videos About TAIT-Exam Syllabus And Other Exam Visit My Channel
TAIT च्या 30 प्रश्नपत्रिका PDF
BADSHAHimp Available Request 9765226781
WWW.YouTube.com/BADSHAHimp
Subscribe My Channel

3	{1, 3, 5, ….47} मधून P संख्या निवडली, (x – 2) (x - 7) (x - 5) (x - 47) = 0 हे समीकरण P पूर्ण करण्याची संभाव्यता A number P is chosen from {1, 3, 5, ….47} the probability that P satisfies the equation (x – 2) (x - 7) (x - 5) (x - 47) = 0 is نمبر P {1، 3، 5، ... .47} مساوات (x – 2) (x - 7) (x - 5) (x - 47) = 0 کو مطمئن کرے pسے منتخب کیا جاتا ہے، یہ امکان کہ گی، ہے
	A.1/8 A.1/8 A.1/8
	B.1/6 B.1/6 B.1/6
	C.1/3 C.1/3 C.1/3
	D.1/5 D.1/5 D.1/5
Answer:	A.1/8 A.1/8 A.1/8

For More Info And Videos About TAIT-Exam Syllabus And Other Exam Visit My Channel
TAIT च्या 30 प्रश्नपत्रिका PDF
BADSHAHimp Available Request 9765226781
YouTube WWW.YouTube.com/BADSHAHimp
Subscribe My Channel

4 सूचना: खालील माहिती काळजीपूर्वक वाचा आणि खालील प्रश्नांची उत्तरे द्या:
P, Q, R, S, T, V आणि W सत्रामधले सात सहभागी आहेत. त्यांच्यात तीन विद्यार्थी, दोन शिक्षक आणि दोन सहयोगी आहेत. ते तीन वेगवेगळ्या गटांमध्ये काम करतात- I, II आणि III. प्रत्येक गटात एक विद्यार्थी आणि किमान एक शिक्षक किंवा एक सहयोगी आहे. S हा विद्यार्थी आहे आणि तो P सोबत III-या गटात आहे. P हा सहयोगी आहे. I ल्या गटात केवळ T आणि दुसरा सहयोगी आहे. V हा विद्यार्थी Q सोबत काम करतो, जो W सोबत काम करत नाही. शिक्षक W, R सोबत काम करत नाही.
जर Rला III-या गटात स्थानांतरीत केले आणि Pला Iल्या गटात स्थानांतरीत केले तर खालीलपैकी कोणते विधान सत्य असेल?

DIRECTIONS: Study the following information carefully and answer the questions given below:
P, Q, R, S, T, V and W are seven participants in a seminar. There are three students, two Lecturers and two assistants among them. They work in three different groups I, II and III. In each group there is one student and at least one Lecturer or one assistant. S is a student and is in group III with P, an assistant. The other assistant is in group I with only T. V, a student works with Q who does not work with W. Lecturer W does not work with R.
If R is transferred in group III and P is transferred in group I, then which of the following statements will be true?

ہدایات: مندرجہ ذیل معلومات کو دھیان سے پڑھیں اور نیچے دیے گئے سوالوں کے جواب دیں۔
P، Q، R، S، T، V اور W ایک سیمنار میں سات شرکاء ہیں۔ ان میں سے تین طالب علم، دو لیکچرر اور دو معاونین ہیں۔ وہ تین مختلف گروپ I، II اور III میں کام کرتے ہیں۔ ہر گروپ میں ایک طالب علم اور کم سے کم ایک لیکچرر یا ایک معاون ہیں۔ S ایک طالب علم ہے Q ایک طالب علم، V کے ساتھ ہے۔ T میں صرف I کے ساتھ ہے، جو ایک معاون ہے۔ دوسرا معاون گروپ P میں III اور گروپ کے ساتھ کام نہیں کرتا ہے۔ R، W کے ساتھ کام نہیں کرتا ہے۔ لیکچرر W کام کرتا ہے جو میں منتقل کر دیا جاتا ہے، تو پھر مندرجہ ذیل بیانات میں سے کیا درست I کو گروپ P میں منتقل کیا جاتا ہے اور III کو گروپ R اگر ہوگا؟

A.II-या गटात केवळ दोन सहभागी असतील
A.There will be only two participants in group II
A.میں صرف دو شرکاء ہوں گے II گروپ

B.I-या गटात तीन सहभागी असतील.
B.There will be three participants in group I
B.میں تین شرکاء ہوں گے I گروپ

C.II-या गटात तीन सहभागी असतील.
C.There will be three participants in group II
C.میں تین شرکاء ہوں گے II گروپ

D.दोन्ही सहभागी एकत्र काम करतील.
D.Both assistants will work together
D.دونوں معاون ایک ساتھ کام کریں گے

Answer: A.II-या गटात केवळ दोन सहभागी असतील
A.There will be only two participants in group II
A.میں صرف دو شرکاء ہوں گے II گروپ

For More Info And Videos About TAIT-Exam Syllabus And Other Exam Visit My Channel
TAIT च्या 30 प्रश्नपत्रिका PDF
BADSHAHimp Available Request 9765226781
WWW.YouTube.com/BADSHAHimp
Subscribe My Channel

5

सूचना: खालील प्रश्नात चार / पाच आकृत्या दिल्या आहेत. तीन / चार आकृत्यांमध्ये एक विशिष्ट साम्य आहे आणि त्यामुळे त्यांचा एक गट तयार होतो. या गटात न बसणारी आकृती शोधून काढा.

DIRECTIONS: In the following question, four/five figures are given. Three/four are similar in a certain way and so form a group. Find out which one of the figures does not belong to that group.

ہدایات: مندرجہ ذیل سوال میں، 4 / 3 تصویریں دی گئی ہیں- 4 / 3 ایک مخصوص طریقے میں ایک جیسی ہیں اور اس طرح ایک گروپ تشکیل کرتی ہیں- یہ معلوم کریں کہ ان میں سے کس تصویر کا تعلق اس گروپ سے نہیں ہے-

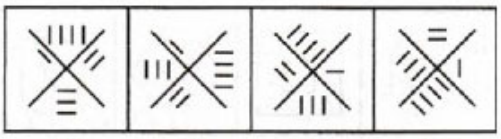

(A) (B) (C) (D)

A. (A)

B. (B)

C. (C)

D. (D)

Answer: D. (D)

6

असममधील प्रसिद्ध ‘एक-शिंगी गेंडा’ वाईल्डलाईफ सेंचूरीचे नाव सांगा.

Name the famous ‘one-horn rhinoceros’ wild-life sanctuary in Asom.

آسام میں مشہور 'ون ہارن گینڈا' جنگلی زندگی سینکچری کا نام ہے.

A.मानस
A.Manas
A. مناس

B.काझीरंगा
B.Kaziranga
B. کاجیرنگا

C.गिर फॉरेस्ट
C.Gir Forest
C. گر جنگل

D.कान्हा-किस्ली
D.Kanha-Kisli
D.کانہا کسلی

For More Info And Videos About TAIT-Exam Syllabus And Other Exam Visit My Channel
TAIT च्या 30 प्रश्नपत्रिका PDF
BADSHAHimp Available Request 9765226781
WWW.YouTube.com/BADSHAHimp
Subscribe My Channel

Answer: B.काझीरंगा
B.Kaziranga
B. کاجیرنگا

7 सूचना: खालील दिलेल्या प्रश्नामध्ये काही विधाने आणि काही निष्कर्ष आहेत. सामन्यात: ज्ञात तथ्यांपेक्षा ते वेगळे असतील तर दिलेली विधाने तुम्हाला सत्य मानवी लागतील आणि त्यानंतर दिलेल्या विधानाचे अनुकरण दिलेल्यापैकी कोणता निष्कर्ष तार्किकदृष्ट्या करतो ते ठरवा.

विधाने:
Hनिष्कर्ष:
I. H > I
II. I > F

DIRECTIONS: In the question given below, there are few statements followed by few conclusions. You have to take the given statements to be true even if they seem to be at variance with commonly known facts and then decide which of the given conclusion logically follow(s) from the given statements.

Statements:
H < J = K ≤ I < F
Conclusions:
I. H > I
II. I ≥ F

ہدایات: مندرجہ ذیل سوال میں، کچھ بیانات کے بعد کچھ نتائج موجود ہیں. اگر آپ کو عام طور پر جانے جاتے حقائق کے ساتھ بھی متغیر ہونے لگے تو بھی آپ دئے گئے بیانات دماغ میں رکھیں اور پھر اس بات کا فیصلہ کریں کہ ذیل میں دیا گیا کونسا نتیجہ منطقانہ طور پر دیے گئے بیانات کی پیروی کرتا ہے.

بیانات:
Hنتائج:
H > I .I
I > F .II

A.फक्त I निष्कर्ष अनुकरण करतो
A.Only Conclusion I follows
A.صرف نتیجہ I پیروی کرتا ہے

B.फक्त II निष्कर्ष अनुकरण करतो
B.Only Conclusion II follows
B.صرف نتیجہ II پیروی کرتا ہے

C.I किंवा II यापैकी एक निष्कर्ष अनुकरण करतो
C.Either Conclusion I or II follows
C.I اور II نتائج میں سے ایک پیروی کرتا ہے

For More Info And Videos About TAIT-Exam Syllabus And Other Exam Visit My Channel
TAIT च्या 30 प्रश्नपत्रिका PDF
BADSHAHimp Available Request 9765226781
WWW.YouTube.com/BADSHAHimp
Subscribe My Channel

D.I व II हे दोन्हीही निष्कर्ष अनुकरण करीत नाहीत
D.Neither Conclusion I nor II follows
D.I اور II نتائج میں سے کوئی بھی پیروی نہیں کرتا

Answer: D.I व II हे दोन्हीही निष्कर्ष अनुकरण करीत नाहीत
D.Neither Conclusion I nor II follows
D.I اور II نتائج میں سے کوئی بھی پیروی نہیں کرتا

8 जर A, B, C, D आणि E हे पाच क्रमांक आहे जे A:B=2:3, B:C=3:5, C:D=5:7 आणि D:E=7:11 या प्रमाणात आहे. तर A:E शोधा.

If A, B, C, D and E are five numbers such that A:B=2:3, B:C=3:5, C:D=5:7 & D:E=7:11. Find A:E ?

اگر A،B ، C ، D اور E پانچ نمبر ہیں اس طرح سے کہ A:B=2:3، B:C=3:5،C:D=5:7 اور D:E=7:11 تو A:E معلوم کریں؟

A.2:11
A.2:11
A.2:11

B.1:2
B.1:2
B.1:2

C.3:7
C.3:7
C.3:7

D.5:1
D.5:1
D.5:1

Answer: A.2:11
A.2:11
A.2:11

9 पुढील म्हण पूर्ण करा - ‘ एक ना धड भाराभर ---------- .’

A.चिंध्या

B.केस

C.कपडे

D.गवत

Answer: A.चिंध्या

10 सूचना: प्रत्येक प्रश्नाला एक प्रमुख विधानासोबत चार विधाने आहेत ज्यांच्याखाली A, B, C आणि D असे चार विधान आहेत. क्रमवार विधानांची जोडी निवडा ज्यामध्ये प्रथम विधान दुसऱ्या विधानाला सुचवते, आणि दोन्ही विधाने तर्किकदृष्ट्या प्रमुख विधानासोबत निगडित असेल.

जर माझ्या आईने जेवण बनवले, तर ती माझ्यासाठी अतिरिक्त चीज ठेवते.
A. माझ्या आईने रात्रीचं जेवण बनवले
B. माझ्या आईने रात्रीचं जेवण बनवले नाही
C. माझ्या जेवणात अतिरिक्त चीज घातलेले आहे.
D. माझ्या जेवणात अतिरिक्त चीज घातलेले नाही

DIRECTIONS: Each question has a main statement followed by four statements labelled A, B, C and D. Choose the ordered pair of statements, where the first statement implies the second, and the two statements are logically consistent with the main statement.

If my mother cooks dinner , she garnishes extra cheese for me .
A. my mother cooked the dinner
B. my mother did not cook dinner
C. My food is garnished with extra cheese.
D. My food is not garnished with extra cheese.

ہدایت: ہر سوال میں ایک جملہ ہے جسکے بعد چار جملےاے، بی،سی اور ڈی کے نام سے دئے گئے ہیں اسمیں منسلک جوڑیوں کو چنئے۔ جہاں پہلا جملہ دوسرے جملہ کی اور اشارہ کر رہا ہے اور دو جملے منطقی مرکزی بیان کے مطابق ہیں

اگر میری امی کھانا بنائیں تو میرے لیے ایکسٹرا چیز ڈالتی ہیں۔
Aمیری امی نے کھانا بنایا ۔
Bمیری امی نے کھانا نہیں بنایا ۔
Cمیرے کھانے میں ایکسٹرا چیز تھی۔
Dمیرے کھانے میں ایکسٹرا چیز نہیں تھی ۔

A.AB
A.AB
A.AB

B.BC
B.BC
B.BC

C.DA
C.DA
C.DA

D.DB
D.DB
D.DB

Answer: D.DB
D.DB
D.DB

11 पदार्थाचे अण्विक तत्व कोणी प्रस्तावित केले?

Who proposed the Atomic principle of matter?

میٹر کا اٹومک اصول کس نے پیش کی؟

A.पास्कल
A.Pascal
A.پاسکل

B.डाल्टन
B.Dalton
B.ڈیلٹون

C.न्यूटन
C.Newton
C.نیوٹن

D.अवोगाड्रो
D.Avogadro
D.ایوگیڈرو

Answer: B.डाल्टन
B.Dalton
B.ڈیلٹون

12 Fill in the blank with the correct article.
He has ____honest face.

A.an

B.a

C.the

D.No article required

Answer: A.an

For More Info And Videos About TAIT-Exam Syllabus And Other Exam Visit My Channel
TAIT च्या 30 प्रश्नपत्रिका PDF
BADSHAHimp Available Request 9765226781 WWW.YouTube.com/BADSHAHimp
Subscribe My Channel

13 एका घनाला रंगवून किमान शक्य संख्येचे काप करून 512 लहान पण एकसारख्या तुकड्यांमध्ये कापले गेले आहे. घन कापण्यासाठी आवश्यक असलेल्या कापांची किमान संख्या काय आहे ?

A cube is painted and cut into 512 smaller but identical pieces by making the minimum possible number of cuts. What is the minimum number of cuts required to cut a cube?

ایک کیوب کو رنگ دے کر ایک جیسے چھوٹے 512 ٹکڑوں میں کاٹا گیا ہے۔ کم سے کم ممکن کٹ لگا کر تو، کیوب کو کاٹنے کے لئے کم سے کم کتنے کٹ لگانے پڑیں گے؟

A.18
A.18
A.18

B.21
B.21
B.21

C.24
C.24
C.24

D.15
D.15
D.15

Answer: B.21
B.21
B.21

14 सूचना: खालील माहिती काळजीपूर्वक वाचा आणि खालील प्रश्नांची उत्तरे द्या:
P, Q, R, S, T, V आणि W सत्रामधले सात सहभागी आहेत. त्यांच्यात तीन विद्यार्थी, दोन शिक्षक आणि दोन सहयोगी आहेत. ते तीन वेगवेगळ्या गटांमध्ये काम करतात- I, II आणि III. प्रत्येक गटात एक विद्यार्थी आणि किमान एक शिक्षक किंवा एक सहयोगी आहे. S हा विद्यार्थी आहे आणि तो P सोबत III-या गटात आहे. P हा सहयोगी आहे. I ल्या गटात केवळ T आणि दुसरा सहयोगी आहे. V हा विद्यार्थी Q सोबत काम करतो, जो W सोबत काम करत नाही. शिक्षक W, R सोबत काम करत नाही.
कोणत्या गटात हे तिघे काम करतील?

DIRECTIONS: Study the following information carefully and answer the questions given below:
P, Q, R, S, T, V and W are seven participants in a seminar. There are three students, two Lecturers and two assistants among them. They work in three different groups I, II and III. In each group there is one student and at least one Lecturer or one assistant. S is a student and is in group III with P, an assistant. The other assistant is in group I with only T. V, a student works with Q who does not work with W. Lecturer W does not work with R.
In which group do three of them work?

ہدایات: مندرجہ ذیل معلومات کو دھیان سے پڑھیں اور نیچے دیے گئے سوالوں کے جواب دیں۔
ایک سیمنار میں سات شرکاء ہیں۔ ان میں سے تین طالب علم، دو لیکچرر اور دو معاونین ہیں۔ وہ تین مختلف W اور P، Q، R، S، T، V گروپ I، II اور III میں کام کرتے ہیں۔ ہر گروپ میں ایک طالب علم اور کم سے کم ایک لیکچرر یا ایک معاون ہیں۔ S ایک طالب علم ہے Q ایک طالب علم، V کے ساتھ ہے۔ T میں صرف I کے ساتھ ہے، جو ایک معاون ہے۔ دوسرا معاون گروپ P میں III اور گروپ W، R کے ساتھ کام نہیں کرتا ہے۔ لیکچرر W کام کرتا ہے جو کے ساتھ کام نہیں کرتا ہے۔
ان میں سے تین کس گروپ میں کام کرتے ہیں؟

A.केवळ I
A.Only I
A.صرف I

B.केवळ II
B.Only II
B.صرف II

C.केवळ III
C.Only III
C.صرف III

D.केवळ II किंवा III
D.Only II or III
D.صرف II یا III

Answer: C.केवळ III
C.Only III
C.صرف III

15 सूचना: प्रत्येक प्रश्नात काही विधाने आहेत ज्यांच्यानंतर चार निष्कर्ष दिले आहे ज्यांना I, II, III आणि IVअसे अंकित केले गेले आहे. सर्वसामान्य ज्ञात तथ्यांशी विसंगती वाटत असली तरीही या विधानांना सत्य समजा. सर्व निष्कर्ष वाचा आणि मग ठरावा को दिलेल्या निष्कर्षांपैकी कोणते दिलेल्या विधानांचे अनुसरण करतात.
विधाने :
A. सर्व जिने लिफ्ट्स असतात.
B. कोणतीही लिफ्ट एस्केलेटर नसते.
C. काही एस्केलेटर हेलीकॉप्टर असतात.
D. काही लिफ्ट्स विमाने असतात.
निष्कर्ष:
I. कोणताही जिना एस्केलेटर नसतो.
II. काही हेलीकॉप्टर एस्केलेटर्स नसतात.
III. काही जिने विमाने असतात.
IV काही हेलीकॉप्टर एस्केलेटर्स असतात.

DIRECTION: In each of these questions a few statements are followed by four conclusions numbered I, II, III and IV Consider the given statements to be true even if they seem to be at variance with commonly known facts. Read all the conclusion(s) and then decide which of the given conclusion(s) logically follow(s) from the given statements.

Statements:
A. All stairs are lifts.
B. No lift is an escalator.
C. Some escalators are helicopters.
D. Some lifts are planes.

Conclusions:
I. No stairs are an escalator.
II. Some helicopters are not escalators.
III. Some stairs are planes.
IV Some helicopters are escalators.

ہدایت:ان سوالات میں سے ہر ایک میں کچھ بیانات کے بعد چار نتائج نمبر I، II، III اور IV دیے گئے ہیں۔ دیے گئے بیانات کو درست تسلیم کریں اگرچہ وہ عام طور پر معلوم حقائق کے برعکس نظر آتے ہوں۔ نتائج کو پڑھیں اور فیصلہ کریں کہ کون سے دیے گئے نتائج منطقی طور پر دیے گئے بیانات کی پیروی کرتے ہیں۔

بیانات:
A. سبھی سیڑھیاں لفٹ ہیں۔
B. کوئی لفٹ ایسکیلیٹر نہیں ہے۔
C. کچھ ایسکیلیٹر ہیلی کاپٹر ہیں۔
D. کچھ لفٹ ہوائی جہاز ہیں۔

حل:
I. کوئی سیڑھیاں ایسکیلیٹر نہیں ہیں۔
II. کچھ ہیلی کاپٹر ایسکیلیٹر نہیں ہیں۔
III. کچھ سیڑھیاں ہوائی جہاز ہیں۔
IV. کچھ ہیلی کاپٹر ایسکیلیٹر ہیں۔

A.केवळ निष्कर्ष I आणि IV निघत असल्यास.
A.Only I and IV follow
A.صرف I اور IV پیروی کرتے ہیں

B.केवळ निष्कर्ष I आणि एकतर II किंवा IV निघत असल्यास.
B.Only I and either II or IV follow
B.صرف I یا II اور یا تو IV پیروی کرتے ہیں

C.एकतर निष्कर्ष II किंवा IV निघत असल्यास.
C.Either II for IV follows
C.یا تو II یا IV پیروی کرتا ہے

D.केवळ निष्कर्ष I, III किंवा IV निघत असल्यास.
D.Only I, III or IV follows
D.صرف III، I یا IV پیروی کرتا ہے

Answer: B.केवळ निष्कर्ष I आणि एकतर II किंवा IV निघत असल्यास.
B.Only I and either II or IV follow
B.صرف I یا II اور یا تو IV پیروی کرتے ہیں

16 4380 ÷ 12 x 8 = ?

4380 ÷ 12 x 8 = ?

4380 ÷ 12 x 8 = ?

A.2720
A.2720
A.2720

B.2925
B.2925
B.2925

C.2825
C.2825
C.2825

D.2920
D.2920
D.2920

Answer: D.2920
D.2920
D.2920

17 ‘टारगट’ या शब्दाचा विरुद्धार्थी शब्द कोणता ?

A.खोडकर

	B.द्वाड
	C.विनयी
	D.फाजील
Answer:	C.विनयी

18	‘बेडौल’ या शब्दाचा समानार्थी शब्द कोणता ?
	A.सुंदर
	B.डौलदार
	C.डोलणारा
	D.कुरूप
Answer:	D.कुरूप

19	सूचना: यांपैकी प्रत्येक प्रश्नात अक्षरे, शब्द किंवा संख्यांचे चार समूह देण्यात आलेले आहेत. त्यांपैकी वेगळे ते निवडा. DIRECTIONS: In each of the questions, four groups of letters, words or numbers are given. Find the odd one out. سمت: ہر سوال میں، حروف، الفاظ یا اعداد کے چار گروپ دیے گئے ہیں۔ بے جوڑ کو تلاش کریں۔
	A.3425 A.3425 A.3425
	B.5229 B.5229 B.5229
	C.8064 C.8064 C.8064

D.6057
D.6057
D.6057

Answer: A.3425
A.3425
A.3425

20 अशा तीन लागोपाठ येणाऱ्या संख्या शोधा ज्या पहिल्यापेक्षा दुप्पट, दुसऱ्यापेक्षा तिप्पट आणि तिसऱ्यापेक्षा चार पट आहेत, ज्यांची बेरीज 191 आहे.

Find three consecutive numbers such that twice the first, three times the second and four times the third together make 191.

تین ایسے مسلسل اعداد معلوم کریں کہ پہلے کا دوگنا،دوسرے کا تین گنا اور تیسرے کا چار گنا کامجموعہ 191 کے برابر ہو۔

A.19, 20, 21
A.19, 20, 21
A.19, 20, 21

B.21, 22, 23
B.21, 22, 23
B.21, 22, 23

C.20, 21, 22
C.20, 21, 22
C.20, 21, 22

D.22, 23, 24
D.22, 23, 24
D.22, 23, 24

Answer: C.20, 21, 22
C.20, 21, 22
C.20, 21, 22

21 अनावश्यक काळजी करण्यासारखे लक्षण आणि भविष्याबद्दल आशंकित राहणे आणि इतर गोष्टी यात बघण्यात येतात-

Symptoms like worrying unnecessarily and being apprehensive constantly about the future and other things can be seen

غیر ضروری طور پر تشویش کی طرح علامات اور مستقبل کے بارے میں مسلسل مسلسل اور دیگر چیزوں کو دیکھا جا سکتا ہے

A.GAD
A.GAD
A.GAD

B.ADHD
B.ADHD
B.ADHD

C.PTSD
C.PTSD
C.PTSD

D.OCD
D.OCD
D.OCD

Answer: A.GAD
A.GAD
A.GAD

22 निर्देश: खालीदिलेल्या अक्षराच्या क्रमात काही अक्षरे गहाळ केली आहेत ते त्या क्रमाने खाली दिलेल्या पर्यायांपैकी एक आहे

a _ ab _ _ bc _ a _ cd_

DIRECTIONS: In each of the following letter series, same of the letters are missing which are given in that order as one of the alternatives below it.

a _ ab _ _ bc _ a _ cd_

دایت جیل کے حرف سرج میں کوئی حرف گمشدہ ہے آپکو انکی شناخت جیل کے اختیارات سے کرنی ہے

a _ ab _ _ bc _ a _ cd_

A.abcabc
A.abcabc
A.abcabc

B.bcadbe
B.bcadbe
B.bcadbe

C.bcabca
C.bcabca
C.bcabca

D.bacbac
D.bacbac
D.bacbac

Answer: B.bcadbe
B.bcadbe
B.bcadbe

23 दिलेल्या पर्यायांपैकी कोणती आकृती मुख्य आकृतीचे अचूक प्रतिबिंब आहे?

Which of the answer figure is exactly the mirror image of the given figure?

جواب کی کون سی تصویر، دی گئی تصویر کی بالکل صحیح آئینہ دار تصویر لکتی ہے؟

मुख्य आकृती
Main Figure
خاص تصویر



उत्तरासाठी पर्यायी आकृत्या
Answer Figure
جواب کی تصویر

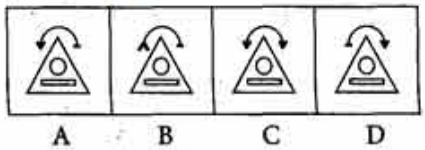

A. (A)

B. (B)

C. (C)

D. (D)

Answer: A. (A)

24 सूचना: अर्थपूर्ण परिच्छेद निर्माण करण्यासाठी, खाली दिलेली (P), (Q) (R), (S) आणि (T) ही पाच वाक्ये योग्य अनुक्रमाने पुनर्रचना करा; त्यांनतर खालील प्रश्नांची उत्तर द्या.

P. मेजवानीसाठी गाढव देण्याचे आश्वसन देत चतुर कोल्ह्याने आपल्याला जीवदान देण्याची विनंती केली.
Q. गाढवावर ताबा मिळविल्यानंतर सिंह कोल्ह्यावरही उडी मारतो आणि दोघांनाही खाऊन टाकतो.
R. गाढव आणि कोल्हा हे दोघे मित्र एका जंगलात अन्न शोधण्यासाठी जातात.
S. मग सिंहाबरोबर कोल्हा असे दोघेजण गाढवाला फसवून एका खड्यात पडतात.
T. जंगलात जाताना, त्यांना खाऊन टाकण्याच्या अपेक्षेने वाटेत सिंह आडवा येतो.

पुनर्रचना केल्यानंतर खालीलपैकी कोणते वाक्य पाचवे असेल?

DIRECTION: Rearrange the following five sentences (P), (Q), (R), (S) and (T) in the proper sequence to form a meaningful paragraph; then answer the questions given below them.
P. The cunning fox promises the lion that he can have the ass for dinner, but asks that his life be spared.
Q. As soon as the ass was secured, the lion jumps at the fox, killing it for its meat and ends up having both.
R. Two partners, the ass and the fox, go to a forest to find food.
S. So, together the lion and the fox trick the ass and make him fall into a pit.
T. On their way to the forest, they meet a lion who wishes to eat both.

Which of the following should be the FIFTH sentence after rearrangement?

ہدایات: ان پانچ جملوں (P)، (Q)، (R)، (S) اور (T) کو با معنی پیرا بنانے کے لئے دوبارہ ترتیب دیجئے، پھر نیچے دے گئے سوالوں کے جواب دیجئے

P. للالچی لومڑی نے شیر سے وعدہ کیا کی وو خچر کو کھا لے، لیکن اسے چھوڈ دے.
Q. جب اسنے خچر کو مارا، شیر لومڑی پی جپٹا،اپنے گوشت کے لئے مارا اور دونو کو مار دیا.
R. دو دوست، خچر اور لومڑی ، جنگل میں کھانا ڈھونڈ نے کے لئے گئے.
S. تو، شیر اور لومڑی نے ملکے خچر کو فسانے کی چال کی اور اسکا شکار کرنے کہ ارادہ کیا.
T. جنگل جاتے وقت، انکو ایک شیر ملا جو ان دونو کو کھانا چاہتا تھا.

دوبارہ ترییب دینے کے بعد کون سا جملہ پانچوہ ہونا چاہیے؟

A.Q
A.Q
A.Q

B.S
B.S
B.S

C.R
C.R
C.R

D.T
D.T
D.T

Answer: A.Q
A.Q
A.Q

25 फोटोतल्या एका माणसाकडे बोट दाखवून, एक स्त्री म्हणते, “याच्या भावाचे वडील माझ्या आजोबांचा एकुलता मुलगा आहे”. मग त्या स्त्रीचे फोटोतल्या पुरुषासोबत काय नाते आहे?

Pointing to a man in a photograph, a woman said, ‘‘His brother’s father is the only son of my grandfather.’’ How is the woman related to the man in the photograph?

تصویر میں آدمی کی طرف اشارہ کرکے، عورت نے کہا، " اسکے بھائی کا باپ میرے دادا کا واحد بیٹا ہے." عورت کا تصویر میں آدمی سے کیا رشتہ تھا؟

A.आई
A.Mother
A.ماں

B.काकू
B.Aunt
B.چا چی

C.बहीण
C.Sister
C.بہن

D.मुलगी
D.Daughter
D.بیٹی

Answer: C.बहीण
C.Sister
C.بہن

26 **खालील आकृतीमध्ये एकूण किती चौरस आहेत?**

How many squares are there in the given figure?

مندرجہ ذیل تصویر میں کتنے اسکوائر ہیں؟

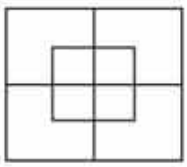

A. 7

	B. 12
	C. 10
	D. 8
Answer:	C. 10

27	देवाला वाहून शिळी झालेली फुले -
	A.पुष्पहार
	B.पुष्पगुच्छ
	C.गुलदस्ता
	D.निर्माल्य
Answer:	D.निर्माल्य

28	सामाजिक घड्याळ म्हणजे The social clock refers to سماجی گھڑی سے مراد ہے
	A.एखादी व्यक्ती किंवा समाजाची काम व फावल्या वेळेची विभागणी A.An individual or society’s distribution work and leisure time A.ایک انفرادی یا سماجی تقسیم کا کام اور آرام کا وقت
	B.प्रौढपणाच्या जबाबदाऱ्या B.Adulthood responsibilities B.بلوغت کی ذمہ داریاں
	C.कारकीर्द सुरु करणे, लग्न करणे आणि अशा पुढील बाबींसाठी ठराविक वये C.Typical ages for starting a career marrying and so on C.کریئر شروع کرنے شادی کرنے اور اس طرح کی اصل عمر
	D.वरीलपैकी कोणतेही नाही D.None of the above D.درج بالا میں سے کوئی نہیں
Answer:	C.कारकीर्द सुरु करणे, लग्न करणे आणि अशा पुढील बाबींसाठी ठराविक वये C.Typical ages for starting a career marrying and so on C.کریئر شروع کرنے شادی کرنے اور اس طرح کی اصل عمر

29 जर सेशान अम्मूपेक्षा उंच असेल पण राजू पेक्षा लहान असेल आणि अम्मू नितीन इतकीच पण किशोर पेक्षा उंच आहे तर सर्वात उंच कोण ?

If Seshan is taller than Ammu but shorter than Raju and Ammu is just as tall as Nitin but taller than Kishore, then who is the tallest?

اگر سیشاں عمو سے لمبھا ہے مگر راجو سے چھوٹا ہے اور امو نیتن جتنا لمبھا ہے مگر کشور سے لمبھا ہے، تو سب سے لمبھا کون ہے؟

A.(a) सेशान
A.Seshan
A.سیشن

B.(b) किशोर
B.Kishore
B.کشورے

C.(c) अम्मू
C.Ammu
C.عو

D.(d) राजू
D.Raju
D.رجوع

Answer: D.(d) राजू
D.Raju
D.رجوع

30 सूचना: अर्थपूर्ण परिच्छेद निर्माण करण्यासाठी, खाली दिलेली (P), (Q) (R), (S) आणि (T) ही पाच वाक्ये योग्य अनुक्रमाने पुनर्रचना करा; त्यांनतर खालील प्रश्नांची उत्तर द्या.

P. मेजवानीसाठी गाढव देण्याचे आश्वसन देत चतुर कोल्ह्याने आपल्याला जीवदान देण्याची विनंती केली.
Q. गाढवावर ताबा मिळविल्यानंतर सिंह कोल्ह्यावरही उडी मारतो आणि दोघांनाही खाऊन टाकतो.
R. गाढव आणि कोल्हा हे दोघे मित्र एका जंगलात अन्न शोधण्यासाठी जातात.
S. मग सिंहाबरोबर कोल्हा असे दोघेजण गाढवाला फसवून एका खड्यात पडतात.
T. जंगलात जाताना, त्यांना खाऊन टाकण्याच्या अपेक्षेने वाटेत सिंह आडवा येतो.

पुनर्रचना केल्यानंतर खालीलपैकी कोणते वाक्य दुसरे असेल?

DIRECTION: Rearrange the following five sentences (P), (Q), (R), (S) and (T) in the proper sequence to form a meaningful paragraph; then answer the questions given below them.
P. The cunning fox promises the lion that he can have the ass for dinner, but asks that his life be spared.
Q. As soon as the ass was secured, the lion jumps at the fox, killing it for its meat and ends up having both.
R. Two partners, the ass and the fox, go to a forest to find food.
S. So, together the lion and the fox trick the ass and make him fall into a pit.
T. On their way to the forest, they meet a lion who wishes to eat both.

Which of the following should be the SECOND sentence after rearrangement?

ہدایات: ان پانچ جملوں (P)، (Q)، (R)، (S) اور (T) کو با معنی پیرا بنانے کے لئے دوبارہ ترتیب دیجئے، پھر نیچے دے گئے سوالوں کے جواب دیجئے

P. للالچی لومڑی نے شیر سے وعدہ کیا کی وو خچر کو کھا لے، لیکن اسے چھوڈ دے.
Q. جب اسنے خچر کو مارا، شیر لومڑی پی جپٹا،اپنے گوشت کے لئے مارا اور دونو کو مار دیا.
R. دو دوست، خچر اور لومڑی ، جنگل میں کھانا ڈھونڈ نے کے لئے گئے.
S. تو، شیر اور لومڑی نے ملکے خچر کو فسانے کی چال کی اور اسکا شکار کرنے کہ ارادہ کیا.
T. جنگل جاتے وقت، انکو ایک شیر ملا جو ان دونو کو کھانا چاہتا تھا.

دوبارہ ترییب دینے کے بعد کون سا جملہ دوسرا ہونا چاہیے؟

A.T
A.T
A.T

B.R
B.R
B.R

C.Q
C.Q
C.Q

D.P
D.P
D.P

Answer: A.T
A.T
A.T

31 6 वाजून 40 मिनिटे झाली असतील, तर घड्याळाच्या काट्यांदरम्यान काय कोन असेल?

What is the angle between the hands of the clock, when it shows 40 minutes past 6?

6 بجکر 40 منٹ ہو رہے ہوں تو گھڑی کے کاٹے کونسا زاویہ بناتے ہیں؟

A.40°
A.40°
A.40°

B.70°
B.70°
B.70°

C.80°
C.80°
C.80°

D.90°
D.90°
D.90°

Answer: A.40°
A.40°
A.40°

32 सूचना: दिलेल्या पर्यायांमधून श्रेणी पूर्ण करणारी योग्य आकृती निवडा.

DIRECTIONS: Complete the series by choosing right figure from the given choices.

ہدایات: دئے گئے انتخابات میں سے صحیح تصویر کو منتخب کرکے سلسلہ مکمل کریں۔

Problem Figures

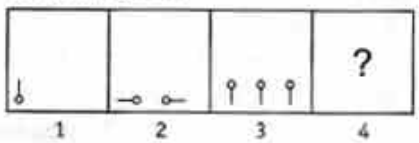

Answer Figures

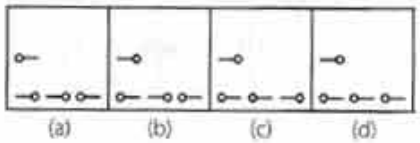

A. (A)

B. (B)

C. (C)

D. (D)

Answer: B. (B)

33 कोनाचा शिरोबिंदू कोठे असतो:

Where does the vertex of an angle lie:

ایک زاویہ کا عمود کہاں پڑتا ہے:

A.अंतर्भागात
A.In the interior
A.داخل میں

B.बाह्यभागात
B.In its exterior
B.خارج میں

C.कोनावर
C.On the angle
C.زاویہ پر

D.यांपैकी कोणतेही नाही
D.none of these
D.کوئی نہیں

Answer: C.कोनावर
C.On the angle
C.زاویہ پر

34 $\sqrt{1024} = ?$

A. 72

B. 22

C. 12

D. 32

Answer: D. 32

35 सूचना: खाली दिलेल्या विधान (A) आणि कारण (R) साठी, खालील पैकी योग्य पर्याय निवडा:

विधान (A): काचेच्या बाटल्या तापवल्याने मेटल स्क्रूचे अवशेष काढून टाकण्यात मदत होते.
कारण (R): तापवल्याने काचेची बाटली संकुचित होते ज्याने कॉर्क काढण्यात मदत होते.

DIRECTION: For the Assertion (A) and Reason (R) given below, choose the correct alternative from the following:

Assertion (A): Heating glass bottles helps in removing metal screw tops which are stuck.
Reason (R): On heating glass bottle shrinks which helps in removing the cork.

ہدایت: نیچے دئیے گئے اسرشن (A) اور (R) وجہ کے لئے، مندرجہ ذیل میں سے صحیح متبادل منتخب کریں:

اسرشن (A): کانچ کی بوتلوں کو گرم کرنے سے دھات کے اسکرو کے پھنسے ہوئے اوپری حصہ کو ہٹانے میں مدد ملتی ہے۔
وجہ (R): کانچ کی بوتل کو گرم کرنے سے بوتل سکڑتی ہے جس سے کارک کو نکالنے میں مدد ملتی ہے۔

A.दोन्ही (A) आणि (R) सत्य आहेत आणि (R) (A) च योग्य स्पष्टीकरण आहे
A.Both (A) and (R) are true and (R) is the correct explanation of (A)
A. (A) اور (R) دونوں صحیح ہیں اور (R) (A) کی درست وضاحت ہے

B.दोन्ही (A) आणि (R) खरे आहेत, परंतु (R) (A) च योग्य स्पष्टीकरण नाही
B.Both (A) and (R) are true, but (R) is not the correct explanation of (A)
B. (A) اور (R) دونوں صحیح ہیں، لیکن (R) (A) کی درست وضاحت نہیں ہے

C.(A) सत्य आहे, परंतु (R) खोटे आहे
C.(A) is true, but (R) is false
C. (A) صحیح ہے، لیکن (R) غلط ہے

D.(A) खोटे आहे, परंतु (R) सत्य आहे
D.(A) is false, but (R) is true
D. (A) غلط ہے، لیکن (R) صحیح ہے

Answer: C.(A) सत्य आहे, परंतु (R) खोटे आहे
C.(A) is true, but (R) is false
C. (A) صحیح ہے، لیکن (R) غلط ہے

36 हिल पॅलेस संग्रहालय _____या राज्यात आहे

The Hill palace Museum is in the state of -

ہِل پیلیس کس صوبہ میں ہے :

A.महाराष्ट्र
A.Maharashtra
A.مہاراشٹرا

B.कर्नाटक
B.Karnataka
B.کرناٹکہ

C.केरळ
C.Kerala
C. کیرالہ

D.यांपैकी कोणतेही नाही
D.None of these
D.انمیں سے کوئی نہیں

Answer:
C.केरळ
C.Kerala
C. کیرالہ

37

विधान:
X देशाचे सरकार आर्थिक शकतात आहे.

कृतीचा कोर्स:
I. सरकार कोकेन कायदेशीर करू शकते.
II. सरकार इन्कम टॅक्स रद्द करू शकते.

Statement:
Government of country X is in financial crisis.
Course of actions:
I. Government can legalise cocaine.
II. Government can abolish income tax

بیان:
X ۔ ملک کی حکومت مالی بحران کا شکار ہے

لائحہ عمل:
I۔ حکومت کوکین کو قانونی بنا سکتی ہے
II۔ حکومت انکم ٹیکس ختم کر سکتی ہے ۔

A.फक्त I अनुसरून आहे
A.Only I follows
A. صرف I لاگو ہو گا

B.फक्त II अनुसरण करते आहे
B.Only II follows
B. صرف II لاگو ہو گا۔

C.एकतर I किंवा II अनुसरून आहे
C.Either I or II follows
C. I یا II میں سے ایک لاگو ہو گا۔

D.I किंवा II दोन्हीपैकी काहीही अनुसरण करत नाही
D.Neither I nor II follows
D. I اور II میں سے کوئی بھی لاگو نہیں ہو گا۔

Answer: D.I किंवा II दोन्हीपैकी काहीही अनुसरण करत नाही
D.Neither I nor II follows
D. I اور II میں سے کوئی بھی لاگو نہیں ہو گا۔

38 वलय प्रभाव (हॅलो इफेक्ट) _____ सकारात्मक गुणसत्तेला ज्यांच्याबद्दल माहिती उपलब्ध नाही अश्या इतर सकारात्मक गुणवत्तांशी जोडणे आहे

Halo effect is _____ to link positive qualities with other positive qualities about which information is not available

ہالو ایفکٹ ایک _____ ہے جس کا مقصد کچھ مثبت خوبیوں کو دیگر ان مثبت خوبیوں سےباہم جوڑدیا جائے ، جن کے بارے میں معلومات مہیا نہیں ہیں۔

A.प्रवृत्ती
A.Tendency
A.میلان(ٹنڈنسی)

B.क्षमता
B.Ability
B.لیاقت

C.सवय
C.Habit
C.عادت

D.पक्के माहीत नाही
D.Not sure
D.یقین سے نہیں کہہ سکتا

Answer: A.प्रवृत्ती
A.Tendency
A.میلان(ٹنڈنسی)

39 भारतीने उत्तरेला 85 मीटर अंतर कापले, मग डावीकडे वळून 15 मी. चालत गेली. ती पुन्हा डावीकडे वळली आणि 60 मी. चालली. तर तिचे तोंड आता कुठल्या दिशेला आहे?

Bharti travelled a distance of 85 m towards North, then turned to left and walked for 15 m. She turned left again and walked 60 m. In which direction is she facing now?

بھارتی نے شمال کی طرف 85 میٹر کا فاصلہ طے کیا، پھر بائیں مڑی اور 15 میٹر چلی۔ وہ پھر بائیں مڑی اور 60 میٹر چلی۔ اب اس کا رخ کس سمت میں ہے؟

A.दक्षिण-पूर्व
A.South-East
A.جنوب-مشرق

B.दक्षिण
B.South
B. جنوب

C.दक्षिण-पश्चिम
C.South-West
C.جنوب-مغرب

D.पश्चिम
D.West
D.مغرب

Answer: B.दक्षिण
B.South
B. جنوب

40 खालीलपैकी कोणते अग्निज खडकाचे उदाहरण आहे?

Which of the following is an example of igneous rock?

درج ذیل میں سے کون آگنیئس پتھر کی مثال ہے؟

A.बेसाल्ट
A.Basalt
A. بیسالٹ

B.चुनखडी
B.Limestone
B. چونا

C.स्लेट
C.Slate
C. سلیٹ

D.संगमरवर
D.Marble
D. ماربل

Answer:
A.बेसाल्ट
A.Basalt
A. بیسالٹ

41

दिलेल्या पर्यायांपैकी वेगळे ते निवडा:

Select the odd one out from the given options:

دیے گئے اختیارات میں سے بے جوڑ کو منتخب کریں:

A.दूध
A.MILk
A.دودھ

B.दही
B.CURD
B.دہی

C.लोणी
C.BUTTER
C.مکھن

D.ब्रेड
D.BREAD
D.بریڈ

Answer:
D.ब्रेड
D.BREAD
D.بریڈ

42 सूचना: अर्थपूर्ण परिच्छेद निर्माण करण्यासाठी, खाली दिलेली (P), (Q) (R), (S) आणि (T) ही पाच वाक्ये योग्य अनुक्रमाने पुनर्रचना करा; त्यांनतर खालील प्रश्नांची उत्तर द्या.

P. मेजवानीसाठी गाढव देण्याचे आश्वसन देत चतुर कोल्ह्याने आपल्याला जीवदान देण्याची विनंती केली.
Q. गाढवावर ताबा मिळविल्यानंतर सिंह कोल्ह्यावरही उडी मारतो आणि दोघांनाही खाऊन टाकतो.
R. गाढव आणि कोल्हा हे दोघे मित्र एका जंगलात अन्न शोधण्यासाठी जातात.
S. मग सिंहाबरोबर कोल्हा असे दोघेजण गाढवाला फसवून एका खड्यात पडतात.
T. जंगलात जाताना, त्यांना खाऊन टाकण्याच्या अपेक्षेने वाटेत सिंह आडवा येतो.

पुनर्रचना केल्यानंतर खालीलपैकी कोणते वाक्य तिसरे असेल?

DIRECTION: Rearrange the following five sentences (P), (Q), (R), (S) and (T) in the proper sequence to form a meaningful paragraph; then answer the questions given below them.
P. The cunning fox promises the lion that he can have the ass for dinner, but asks that his life be spared.
Q. As soon as the ass was secured, the lion jumps at the fox, killing it for its meat and ends up having both.
R. Two partners, the ass and the fox, go to a forest to find food.
S. So, together the lion and the fox trick the ass and make him fall into a pit.
T. On their way to the forest, they meet a lion who wishes to eat both.

Which of the following should be the THIRD sentence after rearrangement?

ہدایات: ان پانچ جملوں (P)، (Q)، (R)، (S) اور (T) کو با معنی پیرا بنانے کے لئے دوبارہ ترتیب دیجئے، پھر نیچے دے گئے سوالوں کے جواب دیجئے

P. للالچی لومڑی نے شیر سے وعدہ کیا کی وو خچر کو کھا لے، لیکن اسے چھوڈ دے.
Q. جب اسنے خچر کو مارا، شیر لومڑی پی جپٹا،اپنے گوشت کے لئے مارا اور دونو کو مار دیا.
R. دو دوست، خچر اور لومڑی ، جنگل میں کھانا ڈھونڈ نے کے لئے گئے.
S. تو، شیر اور لومڑی نے ملکے خچر کو فسانے کی چال کی اور اسکا شکار کرنے کہ ارادہ کیا.
T. جنگل جاتے وقت، انکو ایک شیر ملا جو ان دونو کو کھانا چاہتا تھا.

دوبارہ ترییب دینے کے بعد کون سا جملہ تیسرا ہونا چاہیے؟

A.P
A.P
A.P

B.Q
B.Q
B.Q

C.R
C.R
C.R

D.S
D.S
D.S

Answer: A.P
A.P
A.P

43 खालीलपैकी शुद्ध शब्द कोणता ?

A.जाज्वल्यमान

B.जज्वल्यमान

C.जाज्वल्यमन

D.जजवल्यमान

Answer: A.जाज्वल्यमान

44 निर्देश: खालील व्यवस्था काळजीपूर्वक वाचा आणि खाली दिलेल्या प्रश्नांची उत्तरे द्या.

4 K % R T 3 E P # A 7 B 9 D I Q @ 2 8 V U © H J 5 F 1 % 6 M W

वरील व्यवस्थे मध्ये खालील पर्यायापैकी उजवी कडून 14 व्या घटकाच्या उजव्या बाजूने 7 था घटक कोणता ?

DIRECTIONS: Study the following arrangement carefully and answer the questions given below.

4 K % R T 3 E P # A 7 B 9 D I Q @ 2 8 V U © H J 5 F 1 % 6 M W

Which of the following is the seventh to the right of the fourteenth form the right end in the above arrangement?

ہدایت نیچے دی گی ترتیب کو پڑھئے اور سہی جواب دیجئے

4 K % R T 3 E P # A 7 B 9 D I Q @ 2 8 V U © H J 5 F 1 % 6 M W

اپری ترتیب کے سیدھے ہاتھ سے چودھوی حرف کے سیدھے ہاتھ سے ساتوا حرف کیا ہے؟

A.7
A.7
A.7

B.5
B.5
B.5

C.J
C.J
C.J

D.F
D.F
D.F

Answer: B.5
B.5
B.5

45 अलेक्झांडर ग्रॅहॅम बेल _____या रोगाने ग्रस्त होते.

Alexander Graham Bell suffered from

الیگزینڈر گراہم بیل کس بیماری سے متاثر ہونے میں معروف تھے؟

A.क्षुधातिरेक
A.Bulimia
A.زائد بھوک

B.चिंता
B.Anxiety
B.تشویش

C.औषधीचे दुरुपयोग
C.Drug abuse
C.منشیات کا استعمال

D.वाचन अक्षमता
D.Dyslexia
D.پڑھنے کی اہلیت میں کمی

Answer: D.वाचन अक्षमता
D.Dyslexia
D.پڑھنے کی اہلیت میں کمی

46 16×12−672÷21=?−211

16×12−672÷21=?−211

16×12−672÷21=?−211

	A.381 A.381 A.381
	B.347 B.347 B.347
	C.372 C.372 C.372
	D.यांपैकी कोणतेही नाही. D.None of these. D.ان میں سے کوئی نہیں
Answer:	D.यांपैकी कोणतेही नाही. D.None of these. D.ان میں سے کوئی نہیں

47 सूचना: प्रत्येक प्रश्नाला एक प्रमुख विधानासोबत चार विधाने आहेत ज्यांच्याखाली A, B, C आणि D असे चार विधान आहेत. क्रमवार विधानांची जोडी निवडा ज्यामध्ये प्रथम विधान दुसऱ्या विधानाला सुचवते, आणि दोन्ही विधाने तर्किकदृष्ट्या प्रमुख विधानासोबत निगडित असेल.

एखादी व्यक्ती एकतर धर्माचे पालन करीत नाही किंवा मानवतेचे पालन करीत नाही.
A. एखादी व्यक्ती धर्माचे पालन करीत नाही.
B. एखादी व्यक्ती धर्माचे पालन करत असते.
C. एखादी व्यक्ती मानवतेचे पालन करीत नाही.
D. एखादी व्यक्ती मानवतेचे पालन करते.

DIRECTIONS: Each question has a main statement followed by four statements labelled A, B, C and D. Choose the ordered pair of statements, where the first statement implies the second, and the two statements are logically consistent with the main statement.

One either does not follow religion or does not follow humanity
A.One does not follow religion
B.One follows religion
C.One does not follow humanity
D.One follows humanity

ہدایت: ہر سوال میں ایک جملہ ہے جسکے بعد چار جملےاے، بی،سی اور ڈی کے نام سے دئے گئے ہیں اسمیں منسلک جوڑیوں کو چنئے۔ جہاں پہلا جملہ دوسرے جملہ کی اور اشارہ کر رہا ہے اور دو جملے منطقی مرکزی بیان کے مطابق ہیں

کوئی شخص یا تو مذہب کو فالو نہیں کرتا یا انسانیت کی
Aکوئی شخص مذہب کو فالو نہیں کرتا ۔
Bکوئی شخص مذہب کو فالو کرتا ہے ۔
Cکوئی شخص انسانیت کو فالو نہیں کرتا ۔
Dکوئی شخص انسانیت کو فالو کرتا ہے ۔

A.AD
A.AD
A.AD

B.DB
B.DB
B.DB

C.AB
C.AB
C.AB

D.BC
D.BC
D.BC

Answer: D.BC
D.BC
D.BC

48

सूचना: खालील प्रश्नात असे 3 घटक आहेत ज्यांचा परस्परांशी विशिष्ट संबंध आहे. समान संबंध वर्तुळाच्या संचांनी दर्शविलेला आहे, प्रत्येक वर्तुळ त्याचा आकार कितीही असला तरी, एका घटकाचे प्रतिनिधित्व करते. योग्य वर्तुळाच्या संचांशी खालील घटकांच्या जोड्या लावा.

DIRECTION: The question below has three items having certain relationship among them. The same relationship is expressed by sets of circles, each circle representing one item irrespective of its size. Match the items with right set of circles.

ہدایت: مندرجہ ذیل سوال میں تین آئٹم ہیں جن کے مابین مختلف تعلقات ہیں۔ دائروں کے ایک سیٹ کے ذریعہ یکساں تعلق ظاہر کیا جاتا ہے، ہر دائرہ سائز سے قطع نظر ایک آئٹم کی نمائندگی کرتا ہے۔ آئٹم کو دائروں کے درست سیٹ کے ساتھ ملائیں۔

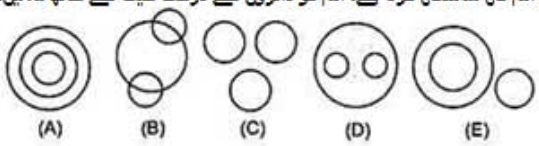

पॉप, गाणी, शास्त्रीय
Pop, Songs, Classical
پاپ، گانے، کلاسیکی

A. (C)

B. (E)

C. (D)

D. (A)

Answer: C. (D)

49

यापैकी कोणती आकृती ऱ्हॉबस, क्वाड्रीलॅटरल्स, पॉलिगॉन्स दर्शवते?

Which figure represents Rhombus, Quadrilaterals, Polygons?

کونسی تصویر رومبس، کواڈریلیٹرل، پولیگوں
کی نمائندگی کرتی ہے؟

(A) 



(C) 

(D) 

Answer: (A) 

50 एखाद्या प्रदर्शनाचे आयोजन करताना विचारात घेण्याचा महत्वाचा मुद्दा म्हणजे:

The important point to be considered for organising an exhibition is:

ایک نمائش کا بندوبست کرنے کے لئے اہم سمجھا جانے والا اہم نکتہ یہ ہے:

A.ते एका एकात्मिक थीमवर केंद्रीत झालेले असायला हवे
A.It should be focused on a centralised theme
A.اس کی توجہ مرکزی موضوع پر مرکوز ہونی چاہئے

B.ते विद्यार्थ्यांच्या मदतीने आयोजित केले गेले पाहीजे
B.It should be organised with the help of the students
B.طلباء کی مدد سے اسے منظم کیا جانا چاہئے

C.आगामी नियोजन केल्याप्रमाणे ते कार्यान्वयीत केले पाहीजे
C.It should be implemented according to advance planning
C.پیش رفت کی منصوبہ بندی کے مطابق اسے نافذ کرنا چاہئے

D.वरील सर्व
D.All the above
D.مذکورہ تمام

Answer: D.वरील सर्व
D.All the above
D.مذکورہ تمام

51 पुढील संचातील गुणांची सरासरी काढा:
5, 15, 70

Find the average of the scores in the following set:
5, 15, 70

دئے ہوئے اسکور کا اوسط ہوگا
5, 15, 70

A.39
A.39
A.39

B.30
B.30
B.30

C.22
C.22
C.22

D.60
D.60
D.60

Answer: B.30
B.30
B.30

52 DIRECTIONS: A sentence with an underlined phrasal verb is given below. Out of the four options, choose the one which can be substituted for the given phrasal Verb.
She broke down in the middle of her speech.

A.slept

B.sat down

C.stood silent

D.burst into tears

Answer: D.burst into tears

53 शिकविण्यामध्ये टेलिव्हीजनचे योगदान म्हणजे—

The contribution of Television in teaching is—

ٹیلی ویژن کا تعلیم میں حصہ --- ہے.

A.अतिशय उच्च
A.Very high
A.بہت زیادہ

B.सामान्य
B.Ordinary
B.عام

C.उच्च
C.High
C.اعلی

D.शून्य
D.Zero
D.صفر

Answer: A.अतिशय उच्च
A.Very high
A.بہت زیادہ

54 मागच्या दशकामध्ये, खालीलपैकी कोणते जागतिक लोकसंख्येचे प्रमुख कारण नाही?

In the past decade, which of the following has NOT been a major cause of the increase in the world's population?

گزشتہ دہائی میں، مندرجہ ذیل میں سے کون دنیا کی آبادی میں اضافے کی ایک بڑی وجہ نہیں ہے؟

A.दीर्घ जीवन कालावधी
A.Longer life span
A.طویل زندگی کا دورانیہ

B.अर्भक मृत्युदर कमी करणे
B.Lower infant mortality
B.بچوں کی اموات میں کمی

C.सुधारित स्वच्छता
C.Improved sanitation
C.بہتر صفائی

D.यापैकी एकही नाही
D.None of these
D.ان میں سے کوئی بھی نہیں

Answer: D.यापैकी एकही नाही
D.None of these
D.ان میں سے کوئی بھی نہیں

55 एक घड्याळ दुपारचे 12 दाखवीत आहे. त्याचा मिनिट काटा ईशान्येकडे निर्देश करीत आहे. 1.30 वाजता त्याचा तास काटा कोणत्या दिशेस निर्देश करेल?

A clock is placed at 12 noon its minute hand points towards North East. In which direction does its hour hand point at 1.30pm?

ایک گھڑی کو دوپہر کے 12 بجے پر رکھا گیا ہے اور اس کے منت کا کانٹا شمال مشرق کی جانب اشارہ کرتا ہے- تو شام کے 1 بجکر 30 منت پراس کا کانٹا کس سمت میں ہوگا؟

A.उत्तर
A.North
A.شمال

B.पूर्व
B.East
B.مشرق

C.दक्षिण
C.South
C.جنوب

D.पश्चिम
D.West
D.مغرب

Answer: B.पूर्व
B.East
B.مشرق

56 वनस्पतीचे अपरिपक्व पान याच्या कमतरतेमुळे गळून पडते

Immature leaf of plants fall down due to deficiency of

پودوں کی نئی پتی کس چیز کی کمی کی وجہ سے نیچے گر جاتی ہے

A.सल्फर
A.Sulphur
A. سلفر

B.झिंक
B.Zinc
B. زنک

C.फॉस्फरस
C.Phosphorus
C. فاسفورس

D.सोडियम
D.Sodium
D. سوڈیم

Answer: B.झिंक
B.Zinc
B. زنک

57 आवर्ती चिंतेचे झटके ज्यामध्ये व्यक्ती तीव्र घाबरण्याचा अनुभव घेतो त्याला म्हणतात

Recurrent anxiety attacks in which the person experiences intense terror is termed as

متوالی تشویش حملے جس میں انسان بے انتہا خوف محسوس کرتا ہے ، اسے کہا جاتا ہے:

A.भिती विकार
A.Panic disorder
A.دہشت عارضہ

B.सामाजिक भिती
B.Social Phobia
B.سماجی خوف

C.पुरूषांची भिती
C.Angrophobia
C.اینگرو فوبیا) غصے کا خوف)

D.यापैकी एकही नाही
D.None of these
D.ان میں سے کوئی نہیں

Answer: A.भिती विकार
A.Panic disorder
A.دہشت عارضہ

58 खालीलपैकी कोणत्या एक सहायतेचा शिकविण्यावर दिर्घ-कालिक प्रभाव पडतो?

Which one of the following aids has the long-lasting impact on teaching?

مندرجہ ذیل ایڈز میں سے کون سا تدریس پر طویل المیعاد اثر رکھتا ہے؟

A.जेव्हा तुम्ही स्वतः एक आलेख काढता आणि विद्यार्थ्यांना सुद्धा तो काढण्यास प्रेरित करता
A.When you will yourself draw a diagram and also motivate the students to draw them
A.جب آپ خود ایک ڈائیگرام بنائیں گے اور اسے بنانے کے لئے طلباء کی حوصلہ افزائی کریں گے تو

B.जेव्हा तुम्ही गुंडाळी फळ्यावर एखादे सुरेख आकृती काढून आणाल
B.When you will bring a beautiful figure drawn on a roll-up Board
B.جب آپ رول اپ پر ایک خوبصورت شکل تیار کر لیں گے

C.जेव्हा तुम्ही प्रयोगशाळेतून काही संबंधित आलेख आणाल आणि ते शिकवण्यात सहायता म्हणून वापराल
C.When you fetch some related diagram from the lab and use it as a teaching aid
C.جب آپ لیبارٹری سے کوئی متعلقہ ڈائیگرام حاصل کرتے ہیں اور اسے ٹیچنگ ایڈ کے طور پر استعمال کرتے ہیں

D.जेव्हा तुम्ही विद्यार्थ्यांना त्यांच्या घरून अगोदरच आलेख काढून आणण्यास सांगाल
D.When you will inform the students to draw the diagram from their home in advance
D.جب آپ طالب علموں کو آگاہ کریں گے کہ وہ اپنے گھر میں پیشگیڈئیگرام بنائیں

Answer: A.जेव्हा तुम्ही स्वतः एक आलेख काढता आणि विद्यार्थ्यांना सुद्धा तो काढण्यास प्रेरित करता
A.When you will yourself draw a diagram and also motivate the students to draw them
A.جب آپ خود ایک ڈائیگرام بنائیں گے اور اسے بنانے کے لئے طلباء کی حوصلہ افزائی کریں گے تو

59 संवाद एक –

Communication is a—

—مواصلات ہے ایک

A.स्त्रोत आणि घेणाऱ्यांतली प्रक्रिया आहे
A.Process—which is going on between the Source and the Receiver
A. عمل—جو ماخذ اور وصول کنندہ کے درمیان جاری ہو

B.कल्पनांचे आदान-प्रदान करण्याची एक अट आहे
B.A condition of exchange of ideas
B. خیالات کا تبادلہ کرنے کی ایک حالت

C.माहितीचे हस्तांतरण करण्याची एक पद्धत आहे
C.A method of transfer of information's
C. معلومات کی منتقلی کا ایک طریقہ

D.वरील सर्व
D.All of the above
D. مندرجہ بالا سبھی

Answer: D.वरील सर्व
D.All of the above
D. مندرجہ بالا سبھی

60 'उपसंहार' या शब्दाचा समानार्थी शब्द कोणता ?

A.प्रस्तावना

	B.सुरुवात
	C.शेवट
	D.संहार करणे
Answer:	C.शेवट

61	एका संख्येच्या 3/5 चे 60% हे 36 असल्यास ती संख्या आहे: If 60% of 3/5 of a number is 36, then the number is: اگر کسی نمبر کے 3/5 کا 60% ، 36 ہو تو ، نمبر کیا ہوگا۔
	A.80 A.80 A.80
	B.100 B.100 B.100
	C.75 C.75 C.75
	D.90 D.90 D.90
Answer:	B.100 B.100 B.100

62	निर्देश: मालिका पूर्ण करा. TRP, NLJ, HFD, ?. DIRECTION: Complete the series TRP, NLJ, HFD, ?. ہدایت اس سرج کو مکمّل کرو TRP, NLJ, HFD, ?.

A.AZX
A.AZX
A.AZX

B.CJX
B.CJX
B.CJX

C.BZX
C.BZX
C.BZX

D.ZWU
D.ZWU
D.ZWU

Answer:

C.BZX
C.BZX
C.BZX

63

निर्देश: खालील प्रश्न दिलेल्या शब्दांवर आधारित आहेत.

show/ slot/ down/ ride

“down” या शब्दात किती शब्दानच्या जोडी मध्ये तितकेच वर्ण आहेत जितके इंगजी वर्ण मालेतील आहेत?

DIRECTIONS: Following question is based on the given words.

show/ slot/ down/ ride

In the word ‘down’ how many pairs of words have as many letter as in English alphabet?

ہدایت جیل کے سوال دے ہے لفجونپر مشتمل ہیں

show/ slot/ down/ ride

لفج میں انگریجی حرف تہجیبی کے کتنی جودیا ہیں ‘down’

A.एक
A.One
A.ایک

B.दोन
B.Two
B.دو

C.तीन
C.Three
C.تین

D.यापैकी एकही नाही
D.None of these
D.کوئی نہیں

Answer: D.यापैकी एकही नाही
D.None of these
D.کوئی نہیں

64 एक प्रतिभावान विद्यार्थी गणिताच्या पेपरमध्ये एक गंभीर चूक करतो आणि तुम्ही ती चुकी चिह्नांकित केली आहे, नंतर एक परिवेक्षक म्हणून तुमची प्रतिक्रिया काय असेल?

A gifted student commits a serious mistake in Maths paper and you have marked out the error, then being an invigilator what will be your reaction?

ایک گفٹڈ طالب علم ریاضی کے امتحان میں ایک سنگین غلطی کا ارتکاب کرتا ہے اور آپ نے غلطی کی نشاندہی کی ہے، پھربحیثیت ممتحن آپ کا کیا ردعمل ہوگا؟

A.विद्यार्थ्याला तसे दाखवून देऊन चुकी काढून टाकण्यास सांगणे
A.Tell the student to remove the error through indication
A.طالب علم کو اشارہ کے ذریعہ بتائیں کہ غلطی کو مٹا دے

B.तुमच्याकडून कोणतीही प्रतिक्रिया दिली जाणार नाही
B.No response will be given by you
B.آپ کوئی ردعمل نہیں کریں گے

C.त्याच्या उत्तरपत्रिकेवर सही करताना त्याला त्याबद्दल सांगणे
C.Tell him while putting signature on his answer book
C.اس کی جوابی کاپی پر دستخط کرتے وقت اسے بتائیں

D.वर्गाला साधारण संकेत देणे.
D.Giving general hint to the class.
D.کلاس کو عام اشارہ دینا.

Answer: B.तुमच्याकडून कोणतीही प्रतिक्रिया दिली जाणार नाही
B.No response will be given by you
B.آپ کوئی ردعمل نہیں کریں گے

65 A sentence with an underlined idiomatic expression is given. What is the meaning of the idiomatic expression ‘put one's shoulder to the wheel’ in the sentence given below?
I know that the new deadline is tight, but if everyone puts their shoulders to the wheel , I know we can get it done in time!

A.To work very hard and diligently.

B.To assign the work to others and relax

C.To get the work done from outside

D.None of the above

Answer: A.To work very hard and diligently.

66 सूचना: खालील प्रश्नांमध्ये दिलेल्या पर्यायांमधून संबंधित अक्षर/शब्द/संख्या निवडा.

7: 32 :: 8 : ?

DIRECTIONS: In the following question, select the related letter/word/number from the given alternatives.

7: 32 :: 8 : ?

سمت: مندرجہ ذیل سوال میں، دیے گئے متبادل سے متعلقہ حرف/لفظ/نمبر منتخب کریں۔

7: 32 :: 8 : ?

A.48
A.48
A.48

B.30
B.30
B.30

C.35
C.35
C.35

D.37
D.37
D.37

Answer: D.37
D.37
D.37

67 .000001 चे घनमूळ किती असेल?

What will be the cubic root of .000001?

0.000001 کا مکعب روٹ کیا ہوگا؟

	A.0.1 A.0.1 A.0.1
	B.0.01 B.0.01 B.0.01
	C.0.316 C.0.316 C.0.316
	D.3.1E-2 D.3.1E-2 D.3.1E-2
Answer:	B.0.01 B.0.01 B.0.01
68	एअरबीएनबी (Airbnb)ला समतुल्य भारतीय - The Indian equivalent to Airbnb is - ائربی این بی (AIRBNB) کا بھارتیہ مساوی ہے :
	A.फ्लिपकार्ट A.Flipkart A.فلپ کارٹ
	B.मायंत्रा B.Myntra B.مینتر
	C.ओयो C.Oyo C.اوپو
	D.ओला D.Ola D. اولا
Answer:	C.ओयो C.Oyo C.اوپو

69 लोकसंख्येने जगामधील सर्वांत मोठा देश _____ आहे

The largest country in the world by population is -

آبادی کے حساب سے دنیا کا سب سے بڑا ملک ہے :

A.युएसए
A.USA
A.یو ایس اے

B.भारत
B.India
B.بھارت

C.चीन
C.China
C. چائنا

D.रशिया
D.Russia
D.روس

Answer: C.चीन
C.China
C. چائنا

70 4 × 4 मी^{2} च्या चौकोनामध्ये 1/5मी बाजू असलेले किती चौकोन समाविष्ट करता येतील?

How many squares of side 1/5 m can be induced in a square of 4 × 4 m^2?

کتنے مربعوں کی طرف 1/5 میٹر کو ایک 4 × 4 مربع میٹر میں شامل کیا جاسکتا ہے؟

A.400
A.400
A.400

B.40
B.40
B.40

C.80
C.80
C.80

D.320
D.320
D.320

Answer:	A.400 A.400 A.400

71	_____ हे उत्क्रांत स्वभाववैशिष्ट्य असेल _____ would be an evolved trait _____ ایک ارتقا یافتہ خصوصیت ہوگی
	A.अति खाण्याची प्रवृत्ती A.Tendency to overeat A.زیادہ کھانے کا رجحان
	B.धोक्याला त्वरित प्रतिसाद B.Quick response to danger B.خطرے سے فورا بچاو
	C.आक्रमण (अग्रेशन) C.Aggression C.جارحیت
	D.वरीलपैकी सर्व D.All of the above D.درج بالاسبھی
Answer:	D.वरीलपैकी सर्व D.All of the above D.درج بالاسبھی

72 सूचना: प्रत्येक प्रश्नाला एक प्रमुख विधानासोबत चार विधाने आहेत ज्यांच्याखाली A, B, C आणि D असे चार विधान आहेत. क्रमवार विधानांची जोडी निवडा ज्यामध्ये प्रथम विधान दुसऱ्या विधानाला सुचवते, आणि दोन्ही विधाने तर्किकदृष्ट्या प्रमुख विधानासोबत निगडित असेल.

शिष्यवृत्ती एकतर गुणवत्तेवर किंवा गरजांवर आधारित आहे.
A. शिष्यवृत्ती गुणवत्तेवर आधारित आहे.
B. शिष्यवृत्ती गुणवत्तेवर आधारित नाही.
C. शिष्यवृत्तीची गरजेवर आधारित आहे.
D. शिष्यवृत्ती गरजेवर आधारित नाही.

DIRECTIONS: Each question has a main statement followed by four statements labelled A, B, C and D. Choose the ordered pair of statements, where the first statement implies the second, and the two statements are logically consistent with the main statement.

The scholarship is based on either merit or need
A.The scholarship is based on merit
B.The scholarship is not based on merit
C.The scholarship is based on need
D.The scholarship is not based on need

ہدایت: ہر سوال میں ایک جملہ ہے جسکے بعد چار جملےاے، بی،سی اور ڈی کے نام سے دئے گئے ہیں اسمیں منسلک جوڑیوں کو چنئے۔ جہاں پہلا جملہ دوسرے جملہ کی اور اشارہ کر رہا ہے اور دو جملے منطقی مرکزی بیان کے مطابق ہیں

اسکالرشپ یا میرٹ پر ملتی ہے یا ضرورت کی بنیاد پر
Aاسکالرشپ میرٹ کی بنیاد پر ملتی ہے ۔
Bاسکالرشپ میرٹ کی بنیاد پر نہیں ملتی ۔
Cاسکالرشپ ضرورت کی بنیاد پر ملتی ہے ۔
Dاسکالرشپ ضرورت کی بنیاد پر نہیں ملتی ۔

A.AD
A.AD
A.AD

B.DB
B.DB
B.DB

C.AC
C.AC
C.AC

D.BC
D.BC
D.BC

Answer: D.BC
D.BC
D.BC

73 खालीलपैकी कोणती एक कार्य-विश्लेषणाची मुख्य विशिष्टता नाही?

Which one of the following is not the main characteristic of Task-analysis?

ٹاسک تجزیہ کی اہم خصوصیت میں سے کون سا ان میں کوئی نہیں ہے؟

A.विद्यार्थ्यांचे वर्णन आणि त्यांची शिकण्याची क्षमता
A.The description of the students and their learning abilities
A.طلباء اور ان کی سیکھنے کی صلاحیتوں کی وضاحت

B.इच्छित वर्तणुक ओळखणे
B.Identification of desirable behaviours
B.مطلوبہ خواہشات کی شناخت

C.अशी उत्तेजने किंवा स्थिती ओळखणे ज्यामुळे विद्यार्थ्याकडून इच्छित वर्तणुकीची अपेक्षा केली जाऊ शकेल
C.Identification of stimuli or situations by which one can expect student desirable behaviour
C.حوصلہ افزائی یا حالات کی شناخت جس کے ذریعے کوئی طالب علم کے مطلوبہ طرز عمل کی توقع کر سکتا ہے

D.शिकविण्याचे उद्देश ओळखणे
D.Identification of teaching objectives
D.تدریس کے مقاصد کی شناخت

Answer: D.शिकविण्याचे उद्देश ओळखणे
D.Identification of teaching objectives
D.تدریس کے مقاصد کی شناخت

74 खालीलपैकी सर्वांत मोठा अपूर्णांक शोधा

Find the largest among the following fraction

مندرجہ ذیل کسور میں سے سب سے چھوٹی کسر تلاش کریں
مندرجہ ذیل کسور میں سے سب سے بڑی کسر تلاش کریں

A.27/10
A.27/10
A.27/10

B.34/13
B.34/13
B.34/13

C.34/15
C.34/15
C.34/15

D.28/13
D.28/13
D.28/13

Answer: A.27/10
A.27/10
A.27/10

75 सूचना : खालील प्रत्येक प्रश्नात दोन विधाने I आणि II दिलेले आहेत. हे विधान एकतर स्वतंत्र कारण असू शकतात किंवा स्वतंत्र कारणांचे परिणाम असू शकतात. यांपैकी एक विधान इतर विधानाचा परिणाम असू शकतो. दोन्ही विधाने वाचा आणि खालीलपैकी कोणत्या उत्तराचा पर्याय या दोन्ही विधानांमधील संबंधांचे वर्णन करतो ते ठरवा.

विधान :
I. आज, भारत आणि पाकिस्तानच्या पंतप्रधानांनी द्विपक्षीय संबंध सुधारण्यासाठी पावले उचलण्याचे ठरविले आहे.
II. पुढील आठवड्यात परराष्ट्र मंत्र्यांची समिती आणि भारत व पाकिस्तानचे वरिष्ठ अधिकारी आपसातले संबंध सुधारण्यासाठी आणखी काही पावले उचलतील.

DIRECTIONS: Below in each question are given two statements I and II. These statements may be either independent causes or may be effects of independent causes. One of these statements may be the effect of the other statement. Read both the statements and decide which of the following answer choice correctly depicts the relationship between these two statements.

Statements:
I. Today, the Prime Ministers of India and Pakistan have decided to take steps to improve the bilateral relations.
II. Next week a Committee of Foreign Ministers and Senior Officers of India and Pakistan will work out further steps to improve the relationship.

ہدایات: نیچے ہر سوال میں دو بیانات I اور II آ تو یہ بیانات یا ان دیے گئے ہیں۔ ان دیے گئے ہیں۔ یہ بیانات یا تو آزاد وجوہات کے اثرات ہو سکتے ہیں۔ آزاد وجوہات یا پھر آزاد وجوہات کے اثرات ہو سکتے ہیں۔ ان دیے گئے ہیں۔ یہ بیانات یا تو آ
بیانات میں سے ایک بیان دوسرے کا اثر ہو سکتا ہے۔دونوں بیانات پڑھیں اور فیصلہ کریں کہ نیچے دیے گئے کس جواب کا انتخاب ان دونوں بیانات کے در میان تعلق کو ٹھیک سے ظاہر کرتا ہے۔

بیانات:
I – آج پاکستان اور انڈیا کے پرائم مسنٹرز نے دو طرفہ تعلقات کو بہتر بنانے کے لیے اقدامات اٹھانے کا فیصلہ کیا ہے۔
II - اگلے ہفتے انڈیا اور پاکستان کے فارن منسٹرز اور سینئر آفیسرز کی کمیٹی تعلقات بہتری بنانے کے لیے مزید اقدامات پر بات کرے گی۔

A.I हा परिणाम आहे आणि II हे त्याचे तात्काळ आणि प्रमुख कारण आहे;
A.I is effect and II is its immediate and principal cause;
A.بیان نمبر I اثر ہے اور بیان نمبر II اس کی فوری اور بنیادی وجہ ہے۔

B.I हे तात्काळ आणि प्रमुख कारण आहे आणि II हा त्याचा परिणाम आहे
B.I is the immediate and principal cause and II its effect;
B.بیان نمبر I فوری اور بنیادی وجہ ہے اور بیان نمبر II اس کا اثر ہے۔

C.I हा परिणाम आहे परंतु II हे त्याचे तात्काळ आणि प्रमुख कारण नाही
C.I is an effect but II is not its immediate and principal cause;
C.I بیان نمبر اس کی فوری اور بنیادی وجہ نہیں ہے۔ II اثر ہے لیکن بیان نمبر

D.II हा परिणाम आहे परंतु I हे त्याचे तात्काळ आणि प्रमुख कारण नाही
D.II is an effect but I is not its immediate and principal cause;
D.II بیان نمبر اس کی فوری اور بنیادی وجہ نہیں ہے۔ I اثر ہے لیکن بیان نمبر

Answer: B.I हे तात्काळ आणि प्रमुख कारण आहे आणि II हा त्याचा परिणाम आहे
B.I is the immediate and principal cause and II its effect;
B.I بیان نمبر اس کا اثر ہے۔ II فوری اور بنیادی وجہ ہے اور بیان نمبر

76 पश्चिम बंगालमध्ये 'जात्रा' ही _____च्या स्वरूपात असते

'Jatra' in West Bengal is a form of -

مغربی بنگال میں ''جاترا''ایک قسم ہے :

A.क्रिकेट
A.Cricket
A.کرکٹ کی

B.नाट्य
B.Theatre
B.تھیٹر کی

C.शिक्षण
C.Education
C.تعلیم کی

D.संगीत
D.Music
D.موسیقی کی

Answer: B.नाट्य
B.Theatre
B.تھیٹر کی

77 नोबेल पुरस्कार मिळणारी पहिली भारतीय व्यक्ती?

Who was the first Indian to win the Nobel Prize?

پہلا بھارتی جس نے نوبل انعام حاصل کیا :

A.रवींद्रनाथ टागोर
A.Rabindranath Tagore
A.رابیندرناتھ ٹیگور

B.महात्मा गांधी
B.Mahatma Gandhi
B.مہاتما گاندھی

C.इश्वर चंद्र विद्यासागर
C.Ishwar Chandra Vidyasagar
C.ایشورچندر ودیا ساگر

D.बंकिम चंद्र चटोपाध्याय
D.Bankim Chandra Chattopadhyay
D.بنکم چندرچٹوپادھیای

Answer: A.रवींद्रनाथ टागोर
A.Rabindranath Tagore
A.رابیندرناتھ ٹیگور

78 Out of the given options, choose the one which is the correct indirect speech of the sentence given below.
Jenny said to the watchman, “Did you find the key anywhere?”

A.Jenny asks the watchman if he found the key anywhere

B.Jenny asks the watchman if he has found the key anywhere

C.Jenny asked the watchman if he have found the key anywhere

D.Jenny asked the watchman if he had found the key anywhere

Answer: D.Jenny asked the watchman if he had found the key anywhere

79 जर महिन्याचा 9वा दिवशी रविवारच्या आगोदरचा वार येत असेल, तर महिन्याचा 1ल्या दिवशी कोणता वार असेल?

If 9th of the month falls on the day preceding Sunday, on what day will 1st of the month fall?

اگر مہینے کی 9 تاریخ اتوار سے پہلے پڑے، تو کس دن مہینہ کی پہلی تاریخ ہوگی؟

A.शुक्रवार
A.Friday
A.جمعہ

B.शनिवार
B.Saturday
B.سنیچر

C.रविवार
C.Sunday
C.اتوار

D.सोमवार
D.Monday
D.پیر

Answer: A.शुक्रवार
A.Friday
A.جمعہ

80 शिकवण्यासाठी सहायक म्हणून वास्तविक वस्तुंचा वापर करण्यामध्ये खालीलपैकी कोणते एक बरोबर आहे?

Which one of the following is correct statement in the use of real objects as teaching aids?

حقیقی اشیاء کو لیچنگ ایڈ کے طور پر استعمال کرنے میں مندرجہ ذیل میں سے کون سا ایک درست بیان ہے؟

A.तुम्ही जीवंत प्राण्यांचे प्रत्यक्ष प्रात्यक्षिक करणार नाही जे वर्गासाठी गडबड गोंधळ किंवा नुकसान करू शकतात जसे की कुत्रा, माकड, मांजर इत्यादि.
A.You will not demonstrate live the living animals which can create nuisance or harm for the class viz., dog, monkey, cat etc.
A.آپ زندگی یا زندہ رہنے والے جانوروں کا ایسا مظاہرہ نہیں کریں گے جو درجہ بندی ، کتا، بندر، بلی وغیرہ کے لئے نزول یا نقصان پیدا کرسکتے ہیں.

B.तुम्ही रोपट्यांचे प्रात्यक्षिक कराल ज्यांचे प्रदर्शन सहजपणे केले जाऊ शकते
B.You will demonstrate the plants which can be exhibited easily
B.آپ پودوں کا مظاہرہ کریں گے جن کی نمائش آسانی سے کی جا سکتی ہیں

C.तुम्हाला त्या वास्तविक वस्तुंचे प्रात्यक्षिक करायला आवडेल जे विद्यार्थ्यांच्या प्रायोगिक मर्यादांच्या पलिकडे आहेत परंतु वर्गामध्ये सहजपणे केले जाऊ शकतात
C.You will like to demonstrate those real objects which are beyond the experiential limits of the students but can be demonstrated easily in the class
C.آپ ان حقیقی اشیاء کا مظاہرہ کرنا چاہتے ہیں جو طلباء کی تجرباتی حد سے باہر ہیں لیکن کلاس میں آسانی سے ان کا مظاہرہ کیا جا سکتا ہے.

D.(B) आणि (C) बरोबर वाक्ये आहेत
D.(B) and (C) are correct statements
D.(C) اور (B) درست بیانات ہیں

Answer: D.(B) आणि (C) बरोबर वाक्ये आहेत
D.(B) and (C) are correct statements
D.(C) اور (B) درست بیانات ہیں

81 एखाद्या समुह किंवा समाजासाठी कोणतेही हानिकारक किंवा विचलित वागणूकीला _____ असे म्हटले जाते.

Any harmful or disruptive behavior for a group or society is termed as:

کسی گروپ یا معاشرے کے لئے کسی نقصان دہ یا ناپسندیدہ رویے کو یہ قرار دیا جاتا ہے:

A.समाज विघातक वागणूक
A.Antisocial behavior
A.انتہونی رویے

B.हिंसक वागणूक
B.Violent behavior
B.تشدد کا رویہ

C.मनोवैज्ञानिक विरोधी वागणूक
C.Anti-psychological behavior
C.اینٹی نفسیاتی رویے

D.असामान्य वागणूक
D.Abnormal behavior
D.غیر معمولی رویے

Answer: A.समाज विघातक वागणूक
A.Antisocial behavior
A.انتہونی رویے

82 शिकण्यामध्ये प्रेरणेद्वारे खालीलपैकी कोणती एक भूमिका साकारली जात नाही?

Which one of the following role is not played by motivation in learning?

سیکھنے میں حوصلہ افزائی کی طرف سے مندرجہ ذیل کردار میں سے کون سا کردار ادا نہیں کیا گیا ہے؟

A.मानवी वर्तणुकीला उत्तेजन देणे
A.Arousing human behaviour
A.انسانی رویہ کو فروغ دینا

B.मानवी वर्तणुकीचा पाठपुरावा करणे
B.Persisting human behaviour
B.انسانی رویہ کو باقی رکھنا پڑتا ہے

C.मानवी वर्तणुक टिकवून ठेवणे
C.Sustaining human behaviour
C.انسانی عمل کو برقرار رکھنا

D.मानवी वर्तणुक ओळखून काढणे
D.Detecting human behaviour
D.انسانی رویے کا پتہ لگانا

Answer: D.मानवी वर्तणुक ओळखून काढणे
D.Detecting human behaviour
D.انسانی رویے کا پتہ لگانا

83 सर्वात शक्तीमान संगणक आहे —

The most powerful computer is—

سب سے پاورفل کمپیوٹر ہے___

A.सुपर संगणक
A.Super computer
A.سپر کمپیوٹر

B.सुक्षम संगणक
B.Micro computer
B.مائیکرو کمپیوٹر

C.लहान संगणक
C.Mini-computer
C.مینی کمپیوٹر

D.वरील सर्व
D.All of these
D.ان میں سے سبھی

Answer: A.सुपर संगणक
A.Super computer
A.سپر کمپیوٹر

84 **सूचना:** दिलेल्या पर्यायांमधून कोणती आवृती प्रश्न आकृतीमधील श्रेणी पूर्ण करणारी योग्य आकृती आहे?

DIRECTIONS: Which answer figure will complete the pattern in the question figure?

ہدایات : سوال کی تصویر میں جواب کی کون سی تصاویر پیٹرن کو مکمل کریں گی؟

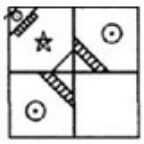

(A) 

(B) 

(C) 

(D) 

Answer: (B) 

85 निर्देश: खालील प्रश्नांमध्ये प्रश्न चिन्हाच्या (?) जागी कोणते अंदाजे मूल्य यायला हवे?
1.37 × 12345=?

DIRECTIONS: What approximate value should come in the place of question mark (?) in the following equations.

1.37 × 12345=?

ہدایات: مندرجہ ذیل سوال میں سوال کا نشان (?) کی جگہ پر کون سا تخمینہ ویلیو آئے گا -
1.37 × 12345=?

A.17000
A.17000
A.17000

B.15000
B.15000
B.15000

C.1500
C.1500
C.1500

D.14300
D.14300
D.14300

Answer:	A.17000 A.17000 A.17000

86	$\left(\frac{243}{32}\right)^{-4/5} = ?$
	A. 81/16
	B. 16/81
	C. 4/9
	D. 9/4
Answer:	B. 16/81

87	खालीलपैकी कोणता मूलभूत अधिकार नाही? Which of the following is not a fundamental right? مندرجہ ذیل میں سے کون سا بنیادی حق نہیں ہے؟
	A.समानतेचा अधिकार A.Right to equality A. مساوات کا حق
	B.संपत्तीचे अधिकार B.Right to property B. جائیداد کا حق
	C.स्वातंत्र्याचा अधिकार C.Right to freedom C. آزادی کے حق
	D.शोषणाविरोधी अधिकार D.Right against exploitation D. استحصال کے خلاف بولنے کا حق
Answer:	B.संपत्तीचे अधिकार B.Right to property B. جائیداد کا حق

88 14 वर्षापर्यंतच्या मुलांच्या विकासासाठी खालीलपैकी सर्वात महत्वाचे काय आहे?

Which of the following is most important for growth of children up to the age of 14?

مندرجہ ذیل میں سے کیا 14 سال تک کے بچوں کی نشونماں کے لئے سب سے اہم چیز ہے؟

A.दूध
A.Milk
A.دودھ

B.जीवनसत्व
B.Vitamins
B.وٹامن

C.चरबी
C.Fats
C.فیٹ

D.प्रोटीन
D.Proteins
D.پروٹین

Answer: D.प्रोटीन
D.Proteins
D.پروٹین

89 निर्देश: दिलेल्या अंक मालिकेतील चुकीची संज्ञा शोधा:

13, 17, 26, 50, 100, 200, 390, 679

DIRECTIONS: Find the wrong term in the given number series:

13, 17, 26, 50, 100, 200, 390, 679

ہدایت دے گئے نمبرس سرج مے غلط نمبر کھوجے

13, 17, 26, 50, 100, 200, 390, 679

A.100
A.100
A.100

B.50
B.50
B.50

C.200
C.200
C.200

D.390
D.390
D.390

Answer: C.200
C.200
C.200

90 लिंग संप्रेरकाचा कोणी शोध लावला?

Who discovered sex hormones?

جنسی ہارمون کی دریافت کس نے کی؟

A.हॅन्सन
A.Hansen
A.ہنسین

B.यूजीन स्टिनच
B.Eugen Steinach
B.یوگین اسٹینچ

C.एडवर्ड केल्विन
C.Edward Calvin
C.ایڈوارڈ کالوین

D.वॉल्टर कोह्न
D.Walter Kohn
D.والٹر کوہن

Answer: B.यूजीन स्टिनच
B.Eugen Steinach
B.یوگین اسٹینچ

91 DIRECTIONS: A sentence with an underlined word is given below. Find the word which is opposite in meaning to the underlined word from the given options.
Over 25 people drowned when a school bus tried to cross a river and flood waters swept through.

A.Drought

B.Overflow

C.Downpour

D.Rains

Answer: A.Drought

92 सूचना: खालील प्रश्नांमध्ये दिलेल्या पर्यायांमधून संबंधित अक्षर समूह निवडा.

HCM : FAK :: SGD : ?

DIRECTIONS: In the following question, select the related group of letters from the given alternatives.

HCM : FAK :: SGD : ?

سمت: مندرجہ ذیل سوال میں، دیے گئے متبادل میں سے حروف کا متعلقہ گروپ منتخب کریں۔

HCM : FAK :: SGD : ?

A.QEB
A.QEB
A.QEB

B.QIB
B.QIB
B.QIB

C.ESQ
C.ESQ
C.ESQ

D.GES
D.GES
D.GES

Answer: A.QEB
A.QEB
A.QEB

93 माझे वय माझ्या मुलापेक्षा तिपट्ट आहे. 15 वर्षांनंतर मी माझ्या मुलापेक्षा दुप्पट मोठा असेन. सध्या आमचे एकूण वय काय आहे?

I am thrice older than my son. 15 years later I will be twice older than my son. What is our total age now?

میں اپنے بیٹے سے 3 گنا بڑا ہوں۔ 15 سال بعد میں اپنے بیٹے سے دوگنا بڑا ہو جاؤ ں گا۔ ہماری مجموعی عمر کیا ہے؟

A.48 वर्षे
A.48 years
A.48 سال

B.60 वर्षे
B.60 years
B.60 سال

C.64 वर्षे
C.64 years
C.64 سال

D.72 वर्षे
D.72 years
D.72 سال

Answer: B.60 वर्षे
B.60 years
B.60 سال

94 एका विशिष्ट सांकेतिक भाषेमध्ये, जर जांभळ्याला हिरवा, हिरव्याला लाल, लालला तपकिरी, तपकिरीला नारंगी, नारंगीला पिवळा, पिवळ्याला निळा आणि निळ्याला आकाशी असे म्हटले, तर या भाषेमध्ये मानवी रक्ताचा रंग काय असेल?

In a certain code language, if Violet is called as Green, Green is called as Red, Red is called as Brown, Brown is called as Orange, Orange is called as Yellow, Yellow is called as Blue and Blue is called as Indigo, then what is the colour of human blood in that language?

ایک مخصوص ضابطے کی زبان میں، اگر بیگنی کو ہرا کہاجاتا ہے، ہرے کو لال کہاجاتا ہے، لال کو بھورا کہاجاتا ہے، بھورے کو نارنجی کہاجاتا ہے، نارنجی کو پیلا کہاجاتا ہے، پیلے کو نیلا کہاجاتا ہے، اور نیلے کو نیل کہاجاتا ہے، تو اس زبان میں انسان کے خون کا رنگ کیا ہے؟

A.लाल
A.Red
A.لال

B.निळा
B.Blue
B.نیلا

C.हिरवा
C.Green
C.ہرا

D.तपकिरी
D.Brown
D.بھورا

Answer: D.तपकिरी
D.Brown
D.بھورا

95 वर्गामध्ये एका मुलाला नखे खाण्याची सवय आहे. तुम्ही त्याची ही सवय कशी घालवाल?

A child has nail-biting habit in the class. How could you improve his habit?

ایک بچے کو کلاس میں ناخن چبانے کی عادت ہے.آپ اس کی عادت کو کیسے بہتر بنا سکتے ہیں؟

A.तुम्ही ते सोडून द्याल कारण तो एखादा भयंकर आजार नाही
A.You leave it because it is not a dangerous disease
A.آپ اسے چھوڑ دیں کیونکہ یہ ایک خطرناک بیماری نہیں ہے

B.त्याच्या वर्तणुकीचे काटेकोर निरिक्षण करून तुम्ही त्याची वर्तणुक बदलायचा प्रयत्न कराल
B.You attempt to mold his behavior under strict observation
B.آپ سخت مشاہدہ کے تحت اس کے رویے کو بدلنے کی کوشش کرتے ہیں

C.तुम्ही त्याचा वर्गामध्ये अपमान कराल
C.You insult him in the class.
C.آپ اسے کلاس میں بدنام کرتے ہیں.

D.तुम्ही त्याच्या पालकांकडे तक्रार कराल
D.You make a complaint with his parent
D.آپ اس کے والدین سے شکایت کرتے ہیں

Answer: B.त्याच्या वर्तणुकीचे काटेकोर निरिक्षण करून तुम्ही त्याची वर्तणुक बदलायचा प्रयत्न कराल
B.You attempt to mold his behavior under strict observation
B.آپ سخت مشاہدہ کے تحت اس کے رویے کو بدلنے کی کوشش کرتے ہیں

96 सूचना : खालील प्रत्येक प्रश्नात दोन विधाने I आणि II दिलेले आहेत. हे विधान एकतर स्वतंत्र कारण असू शकतात किंवा स्वतंत्र कारणांचे परिणाम असू शकतात. यांपैकी एक विधान इतर विधानाचा परिणाम असू शकतो. दोन्ही विधाने वाचा आणि खालीलपैकी कोणत्या उत्तराचा पर्याय या दोन्ही विधानांमधील संबंधांचे वर्णन करतो ते ठरवा.

विधान :
I. विवाहबाह्य सेक्सच्या घटनांमध्ये वाढ होत आहेत.
II. एड्सच्या घटनांमध्ये वाढ होत आहेत.

DIRECTIONS: Below in each question are given two statements I and II. These statements may be either independent causes or may be effects of independent causes. One of these statements may be the effect of the other statement. Read both the statements and decide which of the following answer choice correctly depicts the relationship between these two statements.

Statements:
I. The cases of sex outside marriage is increasing.
II. The cases of AIDS are increasing.

ہدایات: نیچے ہر سوال میں دو بیانات I اور II آزاد وجوہات یا پھر آزاد وجوہات کے اثرات ہو سکتے ہیں۔ ان دیے گئے ہیں۔ یہ بیانات یا تو بیانات میں سے ایک بیان دوسرے کا اثر ہو سکتا ہے۔دونوں بیانات پڑھیں اور فیصلہ کریں کہ نیچے دیے گئے کس جواب کا انتخاب ان دونوں بیانات کے در میان تعلق کو ٹھیک سے ظاہر کرتا ہے۔

بیانات:
I – شادی کے بغیر سیکس کیسز میں اضافہ ہو رہا ہے۔
II - ایڈز کے کیسز کی تعداد میں اضافہ ہو رہا ہے۔

A.विधान I कारण आहे आणि विधान II त्याचा परिणाम आहे;
A.Statement I is the cause and statement II is its effect;
A.بیان نمبر I وجہ ہے اور بیان نمبر II اس کا اثر ہے۔

B.विधान II कारण आहे आणि विधान I त्याचा परिणाम आहे;
B.Statement II is the cause and statement I is its effect;
B.بیان نمبر II وجہ ہے اور بیان نمبر I اس کا اثر ہے۔

C.विधान I आणि II दोन्ही स्वतंत्र कारणे आहेत;
C.Both the statements I and II are independent causes;
C.دونوں بیانات نمبر I اور نمبر II آزاد وجوہات ہیں۔

D.विधान I आणि II दोन्ही स्वतंत्र कारणांचे परिणाम आहेत;
D.Both the statements I and II are effects of independent causes;
D.دونوں بیانات نمبر I اور نمبر II آزاد وجوہات کے اثرات ہیں۔

Answer: A.विधान I कारण आहे आणि विधान II त्याचा परिणाम आहे;
A.Statement I is the cause and statement II is its effect;
A.بیان نمبر I وجہ ہے اور بیان نمبر II اس کا اثر ہے۔

97 पाण्याचे पृथ्वीपासून पर्यावरणामध्ये आणि पुन्हा परत जाणे या अभिसरणाला म्हणतात _____

The circulation of water from the earth to the atmosphere and back again is known as _____

زمین سے فضا میں پانی کی گردش اور دوبارہ واپسی کو _____ کہاجاتا ہے۔

A.पावसाचे चक्र
A.Rain Cycle
A.رین سائیکل

B.वादळी चक्र
B.Thunder Cycle
B.تھنڈر سائیکل

C.पाण्याचे चक्र
C.Water Cycle
C.واٹر سائیکل

D.तुफानी चक्र
D.Storm Cycle
D.اسٹورم سائیکل

Answer: C.पाण्याचे चक्र
C.Water Cycle
C.واٹر سائیکل

98 उत्सर्जन संस्था यासोबत जोडलेली नाही

Excretory system is not associated with

مادہ خارج کرنے والا نظام ------- کے ساتھ منسلک نہیں ہے

A.मूत्रपिंड
A.Kidneys
A. گردوں

B.कान
B.Ears
B. کان

C.फुफ्फुसे
C.Lungs
C. پھیپھڑوں

D.त्वचा
D.Skin
D. جلد

Answer: B.कान
B.Ears
B. کان

99 स्वभाववैशिष्ट्याचे सर्वोत्तम वर्णन असे करता येईल

A trait is best described as

خاصہ کو بہتر طریقہ سے اس طرح بیان کیا گیا ہے

A.पृष्ठभागीय घटकांचा पुंजका
A.cluster of surface factors
A.سطح کے عوامل کا جھنڈ

B.एखाद्या व्यक्तीबद्दलची तात्पुरती वृत्ती
B.a temporary altitude toward a person
B.کسی شخص کی طرف ایک عراضی جھکاو

C.एखाद्या व्यक्तीचा तुलनेने कायमस्वरूपी स्वभाव
C.a relatively permanent disposition of a person
C.ایک شخص کے نسبتا مستقل تخیل

D.एखाद्या व्यक्तीच्या वर्तनास आकार देणारी वातावरणाने निर्धारित गृहीत रचना
D.an environmentally determined hypothetical construct that shapes an individual behavior
D.ایک ایسا ماحول جو نظریاتی تعین کی تعمیر کرتا ہے جو ایک منفرد کردار کی تشکیل دیتا ہے

Answer: D.एखाद्या व्यक्तीच्या वर्तनास आकार देणारी वातावरणाने निर्धारित गृहीत रचना
D.an environmentally determined hypothetical construct that shapes an individual behavior
D.ایک ایسا ماحول جو نظریاتی تعین کی تعمیر کرتا ہے جو ایک منفرد کردار کی تشکیل دیتا ہے

100 5x + 3y = 31 आणि 3x - 5y = 5 या एकपत समीकरणांना पूर्ण करणाऱ्या x आणि y च्या किमती:

The values of x and y that simultaneously satisfy the equations 5x + 3y = 31 and 3x - 5y = 5 are:

x اور y 5 کی وہ قیمتیں جو بیک وقت مساوات x + 3y = 31 3 اور x - 5y = 5 کو مطمئن کریں، یہ ہیں:

A.5, 2
A.5, 2
A.5, 2

B.-5, -2
B.-5, -2
B.-5, -2

C.2, 5
C.2, 5
C.2, 5

D.-2, -5
D.-2, -5
D.-2, -5

Answer: A.5, 2
A.5, 2
A.5, 2

101 सूचना: खालील प्रश्नात, दिलेल्या पर्यायांमधून नातेसंबंध सांगणारी आकृती निवडा.

DIRECTIONS: In the question below, select the related figure from the given alternatives.

ہدایات: ذیل کے سوال میں، دئے گئے متبادلات میں سے متعلقہ تصویر منتخب کریں۔

Problem Figures:



(A) (B) (C) (D)

Answer Figures:



(1) (2) (3) (4)

A. 1

B. 2

C. 3

D. 4

Answer: C. 3

102 ‘ हातपाय गळणे ’ या वाक्प्रचाराचा अर्थ काय ?

A.खचून जाणे

B.नाउमेद होणे

C.अशक्त होणे

D.वरील सर्व

Answer: D.वरील सर्व

103 . पारंपारिक टेलिव्हीजनमध्ये एक मोठी — ची कमतरता आहे

The traditional Television has a great demerit of—

روایتی ٹیلی ویژن کی ایک عظیم برائی ہے-

A.विद्यार्थी आणि शिक्षकांमध्ये आंतरक्रियांचा अभाव
A.The lacking in interactions between the students and the teachers
A.طالب علموں اور اساتذہ کے درمیان بات چیت میں کمی

B.शिकविण्याविषयी शिक्षकांचा निष्क्रिय दृष्टीकोन
B.Teacher's passive attitude towards teaching
B.تدریس کی جانب استاد کے غیر فعال رویے

C.या माध्यमातून शिकविण्यासाठी शिक्षकांची असमर्थता
C.Inability of teachers to teach through this media
C.اس میڈیا کے ذریعہ اساتذہ میں سکھانے کی نااہلی

D.सांगू शकत नाही
D.Cannot say
D.نہیں کہہ سکتے

Answer: A.विद्यार्थी आणि शिक्षकांमध्ये आंतरक्रियांचा अभाव
A.The lacking in interactions between the students and the teachers
A.طالب علموں اور اساتذہ کے درمیان بات چیت میں کمی

104 खालीलपैकी अशुद्ध शब्द कोणता ?

A.जनावर

B.जर्नादन

C.जत्रेकरू

D.जतावणी

Answer: B.जर्नादन

For More Info And Videos About TAIT-Exam Syllabus And Other Exam Visit My Channel
TAIT च्या 30 प्रश्नपत्रिका PDF Available Request 9765226781
BADSHAHimp
WWW.YouTube.com/BADSHAHimp
Subscribe My Channel

105 घटकाची रासायनिक वर्तणूक त्याच्या या गोष्टीवर अवलंबून असते—

Chemical behavior of an element depends upon its—

ایک ایلیمینٹ کے کیمیکل بیہیویئر کا انحصار اس کے _____ پر ہوتا ہے۔

A.अणूकेंद्रातील त्याची प्रोट्रॉनची संख्या
A.Number of protons in nucleus
A.نیوکلیئس میں پروٹون کی تعداد

B.अणूकेंद्रातील त्याची न्युट्रॉनची संख्या
B.Number of Neutrons in nucleus
B.نیوکلیئس میں نیوٹرون کی تعداد

C.अणूकेंद्राभोवती फिरणाऱ्या इलेक्ट्रानची संख्या
C.Number of electrons revolving around nucleus
C.نیوکلیئس کے ارد گرد گردش کرنے والے الیکٹرون کی تعداد

D.अणुकेंद्रातल अणुकणांची संख्या
D.Number of nucleons in nucleus
D.نیوکلئس میں نیوکلیون کی تعداد

Answer: C.अणूकेंद्राभोवती फिरणाऱ्या इलेक्ट्रानची संख्या
C.Number of electrons revolving around nucleus
C.نیوکلیئس کے ارد گرد گردش کرنے والے الیکٹرون کی تعداد

106 एका मुलाच्या फोटोकडे बोट दाखवून रमण म्हणाला, “हा माझ्या आईच्या एकुलत्या मुलाचा मुलगा आहे” रमणचे त्या मुलासोबत काय नाते आहे?

Pointing to a boy's photograph Raman said. "He is the son of my mother's only son". How is Raman related to that boy?

لڑکے کی تصویر کی طرف اشارہ کرکے رمن نے کہا. " یے میری ماں کے واحد بیٹے کا بیٹا ہے". رمن لڑکے کا کیا لگتا تھا؟

A.भाऊ
A.Brother
A.بھائی

B.काका
B.Uncle
B.چچا

C.चुलत भाऊ
C.Cousin
C.چچا زاد

For More Info And Videos About TAIT-Exam Syllabus And Other Exam Visit My Channel
TAIT च्या 30 प्रश्नपत्रिका PDF
BADSHAHimp Available Request 9765226781
WWW.YouTube.com/BADSHAHimp
Subscribe My Channel

D.वडील
D.Father
D.باپ

Answer: D.वडील
D.Father
D.باپ

107 यापैकी कोणती आकृती चिमण्या, पक्षी आणि उंदीर यांच्या दरम्यानचे नाते दर्शवते?

Which of the following diagrams represents the relationship among Sparrows, Birds and Mice?

مندرجہ ذیل ڈایاگراموں میں سے کون سی چڑیوں، پرندوں اور چوہوں کے درمیان تعلقات کی نمائندگی کرتی ہے؟

(A) 

(B) 

(C) 

(D) 

Answer: (D) 

108 कोणत्या शहराला भारताची "सिलिकॉन व्हॅली" म्हटले जाते?

Which city is called the ”Silicon Volley of India?

سلیکان ویلی کے نام سے کون سا شہر جانا جاتا ہے :

A.हैदराबाद
A.Hyderabad
A.ہیدرآباد

B.बेंगलुरू
B.Bengaluru
B. بنگلورو

C.मुंबई
C.Mumbai
C.ممبئی

D.दिल्ली
D.Delhi
D.دہلی

Answer: B.बेंगलुरू
B.Bengaluru
B. بنگلورو

109 सूचना: खालील माहिती काळजीपूर्वक वाचा आणि खालील प्रश्नांची उत्तरे द्या:
P, Q, R, S, T, V आणि W सत्रामधले सात सहभागी आहेत. त्यांच्यात तीन विद्यार्थी, दोन शिक्षक आणि दोन सहयोगी आहेत. ते तीन वेगवेगळ्या गटांमध्ये काम करतात- I, II आणि III. प्रत्येक गटात एक विद्यार्थी आणि किमान एक शिक्षक किंवा एक सहयोगी आहे. S हा विद्यार्थी आहे आणि तो P सोबत III-या गटात आहे. P हा सहयोगी आहे. I ल्या गटात केवळ T आणि दुसरा सहयोगी आहे. V हा विद्यार्थी Q सोबत काम करतो, जो W सोबत काम करत नाही. शिक्षक W, R सोबत काम करत नाही.
खालीलपैकी कोणत्या गटांमध्ये तीन विद्यार्थी आहेत?

DIRECTIONS: Study the following information carefully and answer the questions given below:
P, Q, R, S, T, V and W are seven participants in a seminar. There are three students, two Lecturers and two assistants among them. They work in three different groups I, II and III. In each group there is one student and at least one Lecturer or one assistant. S is a student and is in group III with P, an assistant. The other assistant is in group I with only T. V, a student works with Q who does not work with W. Lecturer W does not work with R.
Which of the following groups represents three students?

ہدایات: مندرجہ ذیل معلومات کو دھیان سے پڑھیں اور نیچے دیے گئے سوالوں کے جواب دیں۔
ایک سیمنار میں سات شرکاء ہیں۔ ان میں سے تین طالب علم، دو لیکچرر اور دو معاونین ہیں۔ وہ تین مختلف W اور P، Q، R، S، T، V گروپ I، II اور III میں کام کرتے ہیں۔ ہر گروپ میں ایک طالب علم اور کم سے کم ایک لیکچرر یا ایک معاون ہیں۔ S ایک طالب علم ہے Q ایک طالب علم، V کے ساتھ ہے۔ T میں صرف I کے ساتھ ہے، جو ایک معاون ہے۔ دوسرا معاون گروپ P میں III اور گروپ W، R کے ساتھ کام نہیں کرتا ہے۔ لیکچرر W کام کرتا ہے جو کے ساتھ کام نہیں کرتا ہے۔
مندرجہ ذیل میں سے کونسا گروپ تین طلبا کی نمائندگی کرتا ہے؟

A.TVS
A.TVS
A.TVS

B.TQS
B.TQS
B.TQS

C.WQS
C.WQS
C.WQS

D.अपुरी माहिती
D.Data inadequate
D.ڈیٹا ناکافی ہے

Answer: A.TVS
A.TVS
A.TVS

110 कोणत्या नैसर्गिक प्रक्रियेमध्ये सुर्यप्रकाश आणि कार्बन डायऑक्साईड यासोबत पाणी एक मुलभूत कच्चा माल आहे?

In which of the natural processes, water is one of the basic raw materials along with the sunlight and carbon dioxide?

کس قدرتی عمل میں، سورج کی روشنی اور کاربن ڈائي آکسائڈ کے ساتھ پانی ایک بنیادی خام مواد ہے؟

A.फोटोसिन्थेसिस
A.Photosynthesis
A.ضیائی تالیف

B.श्वासोच्छवास
B.Respiration
B.عمل تنفس

C.ऑक्सिडिकरण
C.Oxidation
C.عمل تکسید

D.जलिय अपघटन
D.Hydrolysis
D.آب پاشیدگی

Answer: A.फोटोसिन्थेसिस
A.Photosynthesis
A.ضیائی تالیف

111 "भारतीय नवनिर्मितीचा जनक" कोणाला म्हटले जाते?

Who was called the “father of Indian Renaissance”?

بھارت میں سماجی اصلاح کے والد کے نام سے جانا جاتا ہے ۔

A.राजा राममोहन रॉय
A.Raja Rammohan Roy
A.راجہ رام موہن رائے

B.दयानंद सरस्वती
B.Dayanand Saraswati
B.دیانند سرسوتی

C.एम.जी. रानडे
C.M.G. Ranade
C.ایم جی راناڈی

D.सुरेंद्रनाथ बॅनर्जी
D.Surendranath Banerjee
D.سریندرناتھ بنرجی

Answer: A.राजा राममोहन रॉय
A.Raja Rammohan Roy
A.راجہ رام موہن رائے

112 576 च्या एकूण अवयवांची संख्या?

The total number of factors of 576 is?

576 کی کسور کی تعداد ہے

A.21
A.21
A.21

B.20
B.20
B.20

C.24
C.24
C.24

D.15
D.15
D.15

Answer: A.21
A.21
A.21

113 रु. 6000 ला गायीची विक्री करण्याऐवजी गायीची रु. 6500 ला विक्री केल्यास 10% अधिक नफा होतो. गायीची खरेची किंमत काढा.

10% more is gained by selling a cow for Rs.6500 than by selling it for Rs.6000. Find the cost price of the cow.

6500 روپے میں گائے کو فروخت کرنے سے 10% نفع زیادہ ہوتا بنسبت 6000 روپےمیں فروخت کرنے کے. گائے کی لاگت کی قیمت تلاش کریں.

A.रु. 5000
A.Rs.5000
A.Rs.5000

B.रु. 6000
B.Rs.6000
B.Rs.6000

C.रु. 5500
C.Rs.5500
C.Rs.5500

D.यांपैकी कोणतेही नाही
D.None of these
D. کوئی نہیں

Answer: A.रु. 5000
A.Rs.5000
A.Rs.5000

114 रू. 2500 या रकमेवर 3 वर्षांसाठी 5% व्याज दराने सरळ व्याज काढा

Find the simple interest on a sum of Rs.2500 in 3 years at the rate of interest 5%

ایک مبلغ 2500 روپیہ پر 3 سالوں کے لیئے 5٪ کی در سے سود مفرد کو معلوم کریں۔

A.375
A.375
A.375

B.150
B.150
B.150

C.250
C.250
C.250

D.460
D.460
D.460

Answer: A.375
A.375
A.375

115 ‘व्हॅली ऑफ फ्लावर्स’ कोणत्या राज्यामध्ये आहे-

The “Valley of flowers” is located in which state-

پھولوں کی وادی" کس ریاست میں واقع ہے

A.उत्तराखंड
A.Uttarakhand
A. اتراکھنڈ

B.जम्मू आणि काश्मीर
B.Jammu and Kashmir
B. جموں و کشمیر

C.केरळ
C.Kerala
C. کیرالہ

D.हिमाचल प्रदेश
D.Himachal Pradesh
D. ہماچل پردیش

Answer: A.उत्तराखंड
A.Uttarakhand
A. اتراکھنڈ

116 Out of the four alternatives, choose the one which can be substituted for the given words/sentence.
Strong and unreasonable dislike or fear of people from other countries

A.Xenophobia

B.Claustrophobia

C.Amnesia

D.Aborigines

Answer: A.Xenophobia

117 एका फाशाच्या तीन अवास्था दाखविल्या आहेत. दिलेल्या घनात कुठचे चिन्ह असणारी बाजू D या चिन्हाच्या विरुद्ध असेल?

Three positions of a dice are given. Find out which is found opposite the letter D in the given cube.

ایک دیے کی تین پوزیشن دی گئی ہیں- یہ معلوم کریں کہ دئے گئے مکعب میں کون سا حرف D کے سامنے پایا جاتا ہے-



A. F

B. E

C. C

D. A

Answer: C. C

118 दिलेल्या पर्यायांपैकी वेगळे ते निवडा:

Select the odd one out from the given options:

دیے گئے اختیارات میں سے بے جوڑ کو منتخب کریں:

A.MNER
A.MNER
A.MNER

B.BFLK
B.BFLK
B.BFLK

C.RTAC
C.RTAC
C.RTAC

D.GIKM
D.GIKM
D.GIKM

Answer: B.BFLK
B.BFLK
B.BFLK

119 सूचना: खालील प्रश्नांमध्ये तुम्हाला दोन विधाने दिलेली आहे ज्यांच्या नंतर A आणि B असे दोन निष्कर्ष दिलेले आहेत. सामान्यपणे माहीत असलेल्या तथ्यांशी जुळत नसले तरीही ही विधाने बरोबर आहेत असे समजा.
निवेदन:
खूप पुस्तके खडक आहेत.
सर्व खडक क्लिप आहेत.
निष्कर्ष:
A. काही पुस्तके क्लिप आहेत.
B. कोणताही खडक पुस्तक नाही.

DIRECTION: In the following questions, you are given two statements followed by two conclusion A and B. You have to take the statements to be true even if they seem to be at variance from commonly known facts.

Statements:
Many books are rocks.
All rocks are clips.

Conclusions:
A. Some books are clips.
B. No rock is a book.

ہدایت:مندرجہ ذیل سوالات میں، آپ کو دو بیانات دیے گئے ہیں جن کے بعد دو نتائج A اور B دیے گئے ہیں۔ آپ کو بیانات کو درست تسلیم کرنا ہے اگرچہ وہ عام طور پر معلوم حقائق کے برعکس نظر آتے ہوں۔

بیانات:
اکثر کتابیں چٹان ہیں۔
سبھی چٹان کلپ ہیں۔

حل:
A. کچھ کتابیں کلپ ہیں۔
B. کوئی چٹان کتاب نہیں ہے۔

A.जर केवळ पर्याय A असल्यास.
A.If only conclusion A follows
A.صرف نتیجہ A پیروی کرتا ہے۔

B.जर केवळ पर्याय B असल्यास.
B.If only conclusion B follows
B.صرف نتیجہ B پیروی کرتا ہے۔

C.जर दोन्ही पर्याय A आणि B असल्यास.
C.If both A and B follow
C.دونوں A اور B پیروی کرتے ہیں۔

D.जर दोन्ही पर्याय A आणि B नसल्यास.
D.If neither A nor B follows
D.نہ تو A نہ ہی B پیروی کرتا ہے۔

Answer: A.जर केवळ पर्याय A असल्यास.
A.If only conclusion A follows
A.صرف نتیجہ A پیروی کرتا ہے۔

120 भारताचे जल संसाधन, नदी विकास आणि गंगा नुतनीकरण मंत्री कोण आहेत

Who is the Minister of Water Resources, River Development & Ganga rejuvenation of India?

: بھارت کے وزیر پانی، ندی ترقی اور بحالی گنگا ہیں

A.उमा भारती
A.Uma Bharti
A.اما بھارتی

B.एन. जे. गोडकरी
B.N.J. Godkari
B.این جے گوکاری

C.रामविलास पासवान
C.Ramvilas Paswan
C.رام ولاس پاسوان

D.सुरेश प्रभू
D.Suresh Prabhu
D.سریش پربھو

Answer: B.एन. जे. गोडकरी
B.N.J. Godkari
B.این جے گوکاری

121 खालील शब्दांची चढत्या क्रमाने मांडणी करून खाली दिलेल्या प्रतिसादांमधून कोणता अर्थपूर्ण क्रम असेल?

1. प्रवास
2. गंतव्य
3. भरणा
4. बर्थ/पत्रक क्रमांक
5. आरक्षण
6. आरक्षणासाठी बर्थ/आसनाची उपलब्धता

Which one of the given responses would be a meaningful order of the following words in ascending order?

1. Travel
2. Destination
3. Payment
4. Berth/Sheet number
5. Reservation
6. Availability of berth/seat for reservation

چڑھتی ہوئی ترتیب میں دیےگیے جوابات میں سے کونسا ایک مندرجہ ذیل الفاظ کی معنی خیز ترتیب ہوگی؟

1. سفر
2. منزل
3. ادائیگی
4. برتھ / شیٹ نمبر
5. ریزرویشن
6. رکاوٹ کے لئے برتھ / نشست کی دستیابی

A.1, 2, 5, 4, 3, 6
A.1, 2, 5, 4, 3, 6
A.1, 2, 5, 4, 3, 6

B.2, 6, 3, 5, 4, 1
B.2, 6, 3, 5, 4, 1
B.2, 6, 3, 5, 4, 1

C.5, 3, 4, 1, 6, 2
C.5, 3, 4, 1, 6, 2
C.5, 3, 4, 1, 6, 2

D.6, 2, 5, 4, 3, 1
D.6, 2, 5, 4, 3, 1
D.6, 2, 5, 4, 3, 1

Answer: B.2, 6, 3, 5, 4, 1
B.2, 6, 3, 5, 4, 1
B.2, 6, 3, 5, 4, 1

122	भोपाल गॅस त्रासदीसाठी जबाबदार असलेले मुख्य प्रदुषक आहे: The main pollutant responsible for Bhopal Gas Tragedy is: بھوپال گیس سانحہ کے ذمہ دارخاص طورپر ہے:
	A.मिथाईल आयसोयायनाईट A.Methyl isocyanate A.میتیل اسکوانیٹ
	B.ब्रोमिन B.Bromine B.برومین
	C.क्लोरोफ्लूरोकार्बन C.Chlorofluro carbon C.کلورو فلورو کاربن
	D.क्लोरीन D.Chlorine D. کلورین
Answer:	A.मिथाईल आयसोयायनाईट A.Methyl isocyanate A.میتیل اسکوانیٹ

123 सूचना: प्रत्येक प्रश्नाला एक प्रमुख विधानासोबत चार विधाने आहेत ज्यांच्याखाली A, B, C आणि D असे चार विधान आहेत. क्रमवार विधानांची जोडी निवडा ज्यामध्ये प्रथम विधान दुसऱ्या विधानाला सुचवते, आणि दोन्ही विधाने तर्किकदृष्ट्या प्रमुख विधानासोबत निगडित असेल.

जर मला परवडेल, तर मी तो ड्रेस विकत घेऊ शकेन
A. मी तो ड्रेस घेऊ शकतो
B. मी तो ड्रेस घेऊ शकत नाही
C. मी तो ड्रेस विकत घेईन
D. मी तो ड्रेस विकत घेणार नाही

DIRECTIONS: Each question has a main statement followed by four statements labelled A, B, C and D. Choose the ordered pair of statements, where the first statement implies the second, and the two statements are logically consistent with the main statement.

I will buy that dress, if I can afford it.
A. I can afford the dress
B. I can not afford the dress
C. I will buy that dress
D. I will not buy that dress

ہدایت: ہر سوال میں ایک جملہ ہے جسکے بعد چار جملےاے، بی،سی اور ڈی کے نام سے دئے گئے ہیں اسمیں منسلک جوڑیوں کو چنئے۔ جہاں پہلا جملہ دوسرے جملہ کی اور اشارہ کر رہا ہے اور دو جملے منطقی مرکزی بیان کے مطابق ہیں

اگر میں افورڈ کر سکا تو وہ ڈریس لوں گا۔
Aمیں وہ ڈریس افورڈ کر سکتا ہوں ۔
Bمیں وہ ڈریس افورڈ نہیں کر سکتا ۔
Cمیں وہ ڈریس خرید لوں گا ۔
Dمیں وہ ڈریس نہیں خریدوں گا ۔

A.AB
A.AB
A.AB

B.BC
B.BC
B.BC

C.DA
C.DA
C.DA

D.DB
D.DB
D.DB

Answer: D.DB
D.DB
D.DB

124 विधान:
चॅनेल X सध्याच्या सरकारच्या विरोधात आहे. ते नेहमी सरकारी धोरणावरील वादविवाद प्रोत्साहित करतात, त्यांची बातमी नेहमी सरकारच्या धोरणांची टीका करते.

कृतीचा कोर्स:
I. चॅनेल Xवर बंदी घालावी.
II. चॅनेल Xला सेसेशनसह चार्ज करावा.

Statement:
Channel X is against the present government. They always encourage debates on government policies, their news always criticise the policies of the government.
Course of actions:
I. Channel X should be banned.
II. Channel X is should be charged with sedation.

بیان:
X چینل موجودہ حکومت کے خلاف ہے وہ ہمیشہ حکومتی پالیسیوں پر بحث کی حوصلہ افزائی کرتے ہیں، ان کی خبروں میں ہمیشہ حکومتی پالیسیوں پر تنقیدہی ہوتی ہے۔

لائحہ عمل:
I-X چینل پر پابندی لگا دینی چاہیے۔
II- X چینل پر پابندی لگا دینی چاہیے۔

A.फक्त I अनुसरून आहे
A.Only I follows
A. صرف I لاگو ہو گا۔

B.फक्त II अनुसरण करते आहे
B.Only II follows
B. صرف II لاگو ہو گا۔

C.एकतर I किंवा II अनुसरून आहे
C.Either I or II follows
C. I یا II میں سے ایک لاگو ہو گا۔

D.I किंवा II दोन्हीपैकी काहीही अनुसरण करत नाही
D.Neither I nor II follows
D. I اور II میں سے کوئی بھی لاگو نہیں ہو گا۔

Answer: D.I किंवा II दोन्हीपैकी काहीही अनुसरण करत नाही
D.Neither I nor II follows
D. I اور II میں سے کوئی بھی لاگو نہیں ہو گا۔

125 Out of the given options, choose the one which is the correct passive voice of the sentence given below.
Will you accept the position?

A.Will the position be accepted by you?

B.Can the position be accepting by you?

C.Should the position be accepted with you?

D.Have the position been accepted by you?

Answer: A.Will the position be accepted by you?

126 _____ ही आहार साखळीसोबत वाढणारे पदार्थाची संहत तिव्रता आहे.

_____ is when concentration of a substance increases along the food chain.

_____ اس وقت ہوتا ہے جب کسی مواد کی کثافت فوڈ چین کے ساتھ بڑھ جاتی ہے۔

A.जैव विस्तृतीकरण
A.Bio magnification
A.بایو میگنیفیکیشن

B.भेसळ
B.Adulteration
B.اڈلٹریشن

C.जैव भेसळ
C.Bio adulteration
C.بایو اڈلٹریشن

D.वरीलपैकी एकही नाही
D.None of the above
D.ان میں سے کوئی نہیں

Answer: A.जैव विस्तृतीकरण
A.Bio magnification
A.بایو میگنیفیکیشن

127 सूचना: अर्थपूर्ण परिच्छेद निर्माण करण्यासाठी, खाली दिलेली (P), (Q) (R), (S) आणि (T) ही पाच वाक्ये योग्य अनुक्रमाने पुनर्रचना करा; त्यांनतर खालील प्रश्नांची उत्तर द्या.

P. मेजवानीसाठी गाढव देण्याचे आश्वसन देत चतुर कोल्ह्याने आपल्याला जीवदान देण्याची विनंती केली.
Q. गाढवावर ताबा मिळविल्यानंतर सिंह कोल्ह्यावरही उडी मारतो आणि दोघांनाही खाऊन टाकतो.
R. गाढव आणि कोल्हा हे दोघे मित्र एका जंगलात अन्न शोधण्यासाठी जातात.
S. मग सिंहाबरोबर कोल्हा असे दोघेजण गाढवाला फसवून एका खड्यात पडतात.
T. जंगलात जाताना, त्यांना खाऊन टाकण्याच्या अपेक्षेने वाटेत सिंह आडवा येतो.

पुनर्रचना केल्यानंतर खालीलपैकी कोणते वाक्य पहिले असेल?

DIRECTION: Rearrange the following five sentences (P), (Q), (R), (S) and (T) in the proper sequence to form a meaningful paragraph; then answer the questions given below them.
P. The cunning fox promises the lion that he can have the ass for dinner, but asks that his life be spared.
Q. As soon as the ass was secured, the lion jumps at the fox, killing it for its meat and ends up having both.
R. Two partners, the ass and the fox, go to a forest to find food.
S. So, together the lion and the fox trick the ass and make him fall into a pit.
T. On their way to the forest, they meet a lion who wishes to eat both.

Which of the following should be the FIRST sentence after rearrangement?

ہدایات: ان پانچ جملوں (P)، (Q)، (R)، (S) اور (T) کو با معنی پیرا بنانے کے لئے دوبارہ ترتیب دیجئے، پھر نیچے دے گئے سوالوں کے جواب دیجئے

P. للالچی لومڑی نے شیر سے وعدہ کیا کی وو خچر کو کھا لے، لیکن اسے چھوڑ دے.
Q. جب اسنے خچر کو مارا، شیر لومڑی پی جپٹا،اپنے گوشت کے لئے مارا اور دونو کو مار دیا.
R. دو دوست، خچر اور لومڑی ، جنگل میں کھانا ڈھونڈ نے کے لئے گئے.
S. تو، شیر اور لومڑی نے ملکے خچر کو فسانے کی چال کی اور اسکا شکار کرنے کہ ارادہ کیا.
T. جنگل جاتے وقت، انکو ایک شیر ملا جو ان دونو کو کھانا چاہتا تھا.

دوبارہ ترییب دینے کے بعد کون سا جملہ پہلے ہونا چاہیے؟

A.R
A.R
A.R

B.Q
B.Q
B.Q

C.S
C.S
C.S

D.T
D.T
D.T

Answer: A.R
A.R
A.R

128 दिलेली अदलाबदल : चिन्हे – आणि +, तसेच आकडे 8 आणि 15 ; तर 15 + 4 – 8 चे मूल्य किती ?

Given interchanges: signs – and +, and numbers 8 and 15; then the value of 15 + 4 – 8 is

دیئے گئے تبادلے: علامات - اور +، اور نمبر 8 اور 15؛ تو 15 + 4 – 8کی تعداد ہے

A.4
A.4
A.4

B.6
B.6
B.6

C.19
C.19
C.19

D.2
D.2
D.2

Answer: C.19
C.19
C.19

129 Choose the word which is opposite in meaning to the given word.
ALIEN

A.Native

B.Foreign

C.Overseas

D.Unfamiliar

Answer: A.Native

130 सूचना: खालील प्रश्नांमध्ये दिलेल्या पर्यायांमधून संबंधित अक्षर/शब्द/संख्या निवडा.

सफरचंद :फळ ::

DIRECTIONS: In the following question, select the related letter/word/number from the given alternatives.

Apple :Fruit ::

سمت: مندرجہ ذیل سوال میں، دیے گئے متبادل سے متعلقہ حرف/لفظ/نمبر منتخب کریں۔

پھل: سیب ::

A.जोडा : लेस
A.Shoe : Lace
A.جوتا : فیتہ

B.शिक्षक : वर्ग
B.Teacher : Class
B.استاد : کلاس

C.मान : कॉलर
C.Neck : Collar
C.گردن : کالر

D.लिली: फूल
D.Lily: Flower
D.للی: پھول

Answer: D.लिली: फूल
D.Lily: Flower
D.للی: پھول

131 ‘महात्मा’ या शब्दाचा विरुद्धार्थी शब्द कोणता ?

A.क्षुद्र

B.महानुभाव

C.महापुरुष

D.मोठा

Answer: A.क्षुद्र

132 जर '+' याचा अर्थ गुणाकार आहे, 'x' याचा अर्थ भागाकार आहे, '−' याचा अर्थ बेरीज आहे आणि '÷' याचा अर्थ वजाबाकी आहे, तर खालील समीकरणाचे उत्तर काय आहे?

If '+' stands for multiplication, 'x' stands for division, '−' stands for addition and '÷' stands for subtraction, what is the answer for the following equation?

اگر '+' ضرب کا قائم مقام ہو، 'x' تقسیم کا قائم مقام ہو، '-' جمع کا قائم مقام ہو، اور '÷' تفریق کا قائم مقام ہو تو، نیچے لکھے ہوئے مساوات کا کیا جواب ہوگا؟

20 − 5 ÷ 18 x (3 + 2) = ?

A. 20

B. 18

C. 108

D. 22

Answer: D. 22

133 Out of the given options, choose the most appropriate one to fill in the blank.
A crow _____a piece of cheese.

A.stole

B.have steal

C.have stole

D.has steal

Answer: A.stole

134 मोठी पाच स्वभाववैशिष्ट्ये अशा प्रकारेही ओळखण्यात येतात

Big five personality traits also known

پانچ بڑی شخصیات کی خصوصیات کو اس نام سے بھی جانا جاتا ہے

A.पाच घटकीय व्यक्तिमत्त्व
A.five factor personality
A. پانچ عناصر شخصی

B.पाच लोकप्रिय व्यक्तिमत्त्वे
B.five famous personality
B.پانچ مشہور شخصیت

C.पाच घटक नमुना
C.five factor model
C.پانچ عنصر ماڈل

D.घटकांचे विश्लेषण
D.factor analysis
D. عنصر کا تجزیہ

Answer: C.पाच घटक नमुना
C.five factor model
C.پانچ عنصر ماڈل

135 A कडे बोट दाखवून B म्हणाला “तुझी आई ही माझ्या आईची सर्वात लहान बहीण आहे.”. A चे B सोबत नाते काय आहे?

Pointing towards A, B said “Your mother is the youngest sister of my mother”. How is A related to B?

A کی طرف اشارہ کرکے، B نے کہا " آپکی ماں میری ماں کی چھوٹی بہن ہے". A کا B سے کیا رشتہ تھا؟

A.काका
A.Uncle
A.چچا

B.चुलत भाऊ
B.Cousin
B.چچا زاد

C.पुतण्या
C.Nephew
C.بتیجا

D.वडील
D.Father
D.باپ

Answer: B.चुलत भाऊ
B.Cousin
B.چچا زاد

136 ‘ मला काळा चहा प्यायचा आहे.. ’ या वाक्यातील विशेषण ओळखा.

A.मला

B.काळा

C.चहा

D.प्यायचा

Answer: B.काळा

137 खालीलपैकी स्त्रीलिंगी शब्द ओळखा.

A.सडक

B.सत्ता

C.संध्या

D.वरील सर्व

Answer: D.वरील सर्व

138 **सूचना:** खालील प्रश्नात एक उघडलेला फासा दाखविला आहे. उत्तराच्या पर्यायांपैकी कोणता पर्याय • या चिन्हाच्या विरुद्ध बाजूला येईल?

DIRECTIONS: In the following question an unfolded dice is given. From the given alternatives which of the following will be opposite of • ?

ہدایات: مندرجہ ذیل سوال میں ایک کھلا ہوا ڈبہ دیا گیا ہے - دیئے گئے متبادلات میں سے کون مندرجہ ذیل • کے برعکس ہو گا ؟



A. 2

B. 3

C. 1

D. □

Answer: C. 1

139 3 तास 11 मिनिटे 43 सेकंद आणि 15 तास 20 मिनिटे 30 सेकंद यांची बेरीज करा

Add 3 hour 11 minute 43 second and 15 hour 20 minute 30 second?

3 گھنٹہ 11 منٹ 43 سیکنڈ اور 15 گھنٹہ 20 منٹ 30 سیکنڈ کو جوڑیں؟

A.16 तास 31 मिनिटे 13 सेकंद
A.16 hour 31 minute 13 seconds
A.16 گھنٹہ 31 منٹ 13 سیکنڈ

B.14 तास 21 मिनिटे 73 सेकंद
B.14 hour 21 minute 73 seconds
B.14 گھنٹہ 21 منٹ 73 سیکنڈ

C.18 तास 32 मिनिटे 13 सेकंद
C.18 hour 32 minute 13 seconds
C.18 گھنٹہ 32 منٹ 13 سیکنڈ

D.18 तास 31 मिनिटे 73 सेकंद
D.18 hour 31 minute 43 seconds
D.18 گھنٹہ 31 منٹ 73 سیکنڈ

Answer: C.18 तास 32 मिनिटे 13 सेकंद
C.18 hour 32 minute 13 seconds
C.18 گھنٹہ 32 منٹ 13 سیکنڈ

140 हरारे ही _____ची राजधानी आहे

Harare is the capital of -

ہرارے راجدھانی ہے :

A.झिम्बाब्वे
A.Zimbabwe
A.زمبابوے کی

B.युगांडा
B.Uganda
B.یگانڈا کی

C.ट्यूनीशिया
C.Tunisia
C.ٹیونیشیا کی

D.वानुआटु
D.Vanuatu
D.ونواتو کی

Answer:

A.झिम्बाब्वे
A.Zimbabwe
A.زمبابوے کی

141

दोन संख्यांचे गुणोत्तर 4:5 आहे आणि त्यांचा मसावी 8 आहे. तर त्यांचा लसावी काढा?

The ratio of two numbers is 4:5 and their HCF is 8. Then their LCM is?

دو نمبروں کا تناسب 5: 4 ہے اور ان کے ایچ سی ایف 8 ہے۔ پھر ان کے ایل سی ایم کیا ہے؟

A.130
A.130
A.130

B.140
B.140
B.140

C.150
C.150
C.150

D.160
D.160
D.160

Answer:

D.160
D.160
D.160

142

_____हा मुलाचा पहिला शिक्षक असतो

____ is a first teacher for a child

_____ بچوں کے لئے پہلا معلم ہے

A.आई
A.Mother
A.ماں

B.पिता
B.Father
B.باپ

C.शाळेत पहिला शिक्षक
C.First teacher in school
C.اسکول کا پہلا معلم

D.आजी-आजोबा
D.Grand parents
D.دادا دادی

Answer:

A.आई
A.Mother
A.ماں

143

तिसऱ्या उद्दिष्टा मधली गहाळ संख्या काय आहे?
What is the number missing from the third target?
تیسرے دایرے کے لئے گمنام نمبر کھوجے

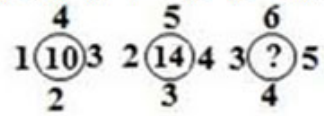

A. 18

B. 45

C. 35

D. 53

Answer:

A. 18

144

सूचना: खालील प्रश्नांमध्ये दिलेल्या पर्यायांमधून संबंधित अक्षर/शब्द/संख्या निवडा.

भूमिती : गणित : : जीवशास्त्र : ?

DIRECTIONS: In the following question, select the related letter/word/number from the given alternatives.

Geometry : Maths : : Biology : ?

سمت: مندرجہ ذیل سوال میں، دیے گئے متبادل سے متعلقہ حرف/لفظ/نمبر منتخب کریں۔

جیومٹری : ریاضی : : بایولوجی : ؟

A.भूगोल
A.Geography
A.جغرافیہ

B.वर्तन
B.Behaviour
B.برتاؤ

C.विज्ञान
C.Science
C.سائنس

D.इंग्रजी
D.English
D.انگریزی

Answer: C.विज्ञान
C.Science
C.سائنس

145 सरळ रूप द्या:
8451 + 793 + 620 – ? = 6065 + 713

Simplify:
8451 + 793 + 620 – ? = 6065 + 713

سادہ بنائیں:
8451 + 793 + 620 – ? = 6065 + 713

A.4912
A.4912
A.4912

B.4712
B.4712
B.4712

C.4312
C.4312
C.4312

D.यांपैकी कोणतेही नाही
D.None of these.
D. ان میں سے کوئی نہیں.

Answer: D.यांपैकी कोणतेही नाही
D.None of these.
D. ان میں سے کوئی نہیں.

146 'OBSTETRICIAN' पासून खालील शब्दांपैकी कोणते शब्द तयार केले जाऊ शकत नाहीत?

Which of the following words cannot be formed from 'OBSTETRICIAN'?

مندرجہ ذیل الفاظ میں سے کونسا 'OBSTETRICIAN' سے نہیں بنایا جاسکتا ہے؟

A.SOBER
A.SOBER
A.SOBER

B.TERMITE
B.TERMITE
B.TERMITE

C.RETAIN
C.RETAIN
C.RETAIN

D.SIREN
D.SIREN
D.SIREN

Answer: B.TERMITE
B.TERMITE
B.TERMITE

147 खालीलपैकी अशुद्ध वाक्य कोणते ?

A.आमच्या गावात वीज आली नव्हती.

B.परत येताना सर्वत्र अंधार झालेला असे.

C.दिव्याचा प्रकाश उबदार व आकर्षक वाटे.

D.एका कोपऱ्यात चुलीजवळ आई बसणार असे.

Answer: D.एका कोपऱ्यात चुलीजवळ आई बसणार असे.

148 दोन भांडी A आणि B मध्ये दूध आणि पाण्याचे मिश्रण आहे. पहिल्या भांड्यामध्ये (म्हणजे) A भांड्यामध्ये दूध आणि पाण्याचे गुणोत्तर 8 : 3 आहे आणि दुसऱ्या भांड्यामध्ये म्हणजे B भांड्यामध्ये दूध आणि पाण्याचे गुणोत्तर 5 : 1 आहे. दूध आणि पाण्याचे गुणोत्तर 4 : 1 होण्यासाठी या दोन भांड्यांमधून 35 लिटर क्षमता असलेले भांडे भरले गेले. मग "A" भांड्यामधून किती लिटर घेतले जायला हवे.

Two vessels A and B contain a mixture of Milk and Water. In the first vessel (i.e) Vessel A has the ratio of milk to water is 8 : 3 and in the second vessel, Vessel B has the ratio of milk to water is 5 : 1. A 35 litre capacity vessel is filled from these two vessels so as to contain a mixture of Milk and water in ratio of 4 : 1. Then how many litres should be taken from the Vessel “A”.

میں پانی اور دودھ کا تناسب 8 : 3 ہے اور دوسرے A دودھ اور پانی کے مرکب پر مشتمل ہیں. پہلے برتن (یعنی) برتن B اور A دو برتن میں، پانی میں دودھ کا تناسب 5 : 1ہے۔ 35 لیٹر کی گنجائش والا برتن ان دونوں برتنوں سے یوں بھراجائے کہ دودھ اور پانی کا Bبرتن سے کتنے لیٹر لینا چاہئے۔ "A" تناسب 4 : 1 ہو جائےاس کے لئے برتن

A.11 लि.
A.11 L
A.11 لیٹر

B.12 लि.
B.12 L
B.12 لیٹر

C.9 लि.
C.9 L
C.9 لیٹر

D.10 लि.
D.10 L
D.10 لیٹر

Answer: A.11 लि.
A.11 L
A.11 لیٹر

149 अनुमानक(इंडक्टीव्ह) आणि अनुषंगिक (डिडक्टीव्ह) पद्धती — मध्ये अधिकाधिक वापरल्या जातात

Inductive and deductive methods are popularly used in—

انڈکٹو اور ڈیڈکٹو طریقوں کااستعمال --- میں مقبول ہے-

A.गणित शिकवणे
A.Math’s teaching
A.ریاضی کی تعلیم

B.शास्त्र शिकवणे
B.Science teaching
B.سائنس کی تعلیم

C.व्याकरण शिकवणे
C.Grammar teaching
C.گرامر کی تعلیم

D.वरील सर्व
D.All the above
D.مذکورہ تمام

Answer: D.वरील सर्व
D.All the above
D.مذکورہ تمام

150 $\frac{(6 \times 6 \times 6) + (2 \times 2 \times 2)}{(6 \times 6) - (6 \times 2) + (2 \times 2)} = ?$

A. 5

B. 6

C. 7

D. 8

Answer: D. 8

151 Out of the given options which best expresses the meaning of the given Proverb?
A rolling stone gathers no moss.

A.People who are always moving, with no roots in one place or another, avoid responsibilities and cares

B.A person who always travels and has no fixed abode is always eager to accept the responsibility of others

C.A person who always travels and has no fixed abode is always ready to provide shelter to anybody and everybody

D.None of the above

Answer: A.People who are always moving, with no roots in one place or another, avoid responsibilities and cares

152 Choose the word which is most similar in meaning to the given word.
RELEVANT

A.Applicable

B.Unconnected

C.Unrelated

D.Inapplicable

Answer: A.Applicable

153 सूचना: खालील माहिती काळजीपूर्वक वाचा आणि खालील प्रश्नांची उत्तरे द्या:
P, Q, R, S, T, V आणि W सत्रामधले सात सहभागी आहेत. त्यांच्यात तीन विद्यार्थी, दोन शिक्षक आणि दोन सहयोगी आहेत. ते तीन वेगवेगळ्या गटांमध्ये काम करतात- I, II आणि III. प्रत्येक गटात एक विद्यार्थी आणि किमान एक शिक्षक किंवा एक सहयोगी आहे. S हा विद्यार्थी आहे आणि तो P सोबत III-या गटात आहे. P हा सहयोगी आहे. I ल्या गटात केवळ T आणि दुसरा सहयोगी आहे. V हा विद्यार्थी Q सोबत काम करतो, जो W सोबत काम करत नाही. शिक्षक W, R सोबत काम करत नाही.
जर दोन्ही शिक्षकांना Iल्या गटात स्थानांतरीत केले गेले तर, कोणत्या गटात W काम करेल?

DIRECTIONS: Study the following information carefully and answer the questions given below:
P, Q, R, S, T, V and W are seven participants in a seminar. There are three students, two Lecturers and two assistants among them. They work in three different groups I, II and III. In each group there is one student and at least one Lecturer or one assistant. S is a student and is in group III with P, an assistant. The other assistant is in group I with only T. V, a student works with Q who does not work with W. Lecturer W does not work with R.
If both Lecturers are transferred in group I, then in which group does W work?

ہدایات: مندرجہ ذیل معلومات کو دھیان سے پڑھیں اور نیچے دیے گئے سوالوں کے جواب دیں۔
P، Q، R، S، T، V اور W ایک سیمنار میں سات شرکاء ہیں۔ ان میں سے تین طالب علم، دو لیکچرر اور دو معاونین ہیں۔ وہ تین مختلف گروپ I، II اور III میں کام کرتے ہیں۔ ہر گروپ میں ایک طالب علم اور کم سے کم ایک لیکچرر یا ایک معاون ہیں۔ S ایک طالب علم ہے P کے ساتھ ہے، ایک معاون ہے۔ دوسرا معاون گروپ I میں صرف T کے ساتھ ہے۔ V، ایک طالب علم Q کے ساتھ کام کرتا ہے جو W کے ساتھ کام نہیں کرتا ہے۔ R، W کے ساتھ کام نہیں کرتا ہے۔ لیکچرر
اگر دونوں لیکچرر گروپ I کو گروپ میں منتقل کر دیے جائیں، تو پھر W کس گروپ میں کام کرتا ہے؟

A.केवळ II
A.Only II
A.صرف II

B.केवळ III
B.Only III
B.صرف III

C.II किंवा III
C.II or III
C.II یا III

D.यांपैकी कोणतीही नाही
D.None of these
D.ان میں سے کوئی نہیں

Answer: D.यांपैकी कोणतीही नाही
D.None of these
D.ان میں سے کوئی نہیں

154 अनभिज्ञ व्यक्तीसाठी व्यक्तीचे व्यक्तिमत्व आहे

For a Layman personality of a person is

ایک عام آدمی کے خیال میں شخصیت ایک _____ .

A.त्याचे शारीरिक रूपरंग
A.His physical appearance
A.اس کا جسمانی ظاہرہ (appearance)ہے۔

B.त्याची बुद्धिमत्ता स्तर
B.His intelligence level
B.-اس کی ذہانت کی سطح ہوتی ہے

C.त्याच्या त्वचेचा रंग
C.His colour of skin
C.-اس کے چمڑے کی رنگت ہوتی ہے

D.(a), (b) आणि (c)
D.(a), (b) & (c)
D.a، b اور c تینوں

Answer: A.त्याचे शारीरिक रूपरंग
A.His physical appearance
A.اس کا جسمانی ظاہرہ (appearance)ہے۔

155 सूचना: खालील प्रश्नांमध्ये दिलेल्या पर्यायांमधून संबंधित अक्षर/शब्द/संख्या निवडा.

मधमाशी : पोळे : : घोडा

DIRECTIONS: In the following question, select the related letter/word/number from the given alternatives.

Bee : Hive : : Horse : ?

سمت: مندرجہ ذیل سوال میں، دیے گئے متبادل سے متعلقہ حرف/لفظ/نمبر منتخب کریں۔

شہد کی مکھی: چھتہ : : گھوڑا : ؟

A.घर
A.House
A.گھر

B.मेज/ टेबल
B.Table
B.میز

C.तबेला
C.Stable
C.اصطبل

D.घरटे
D.Nest
D.گھونسلہ

Answer: C.तबेला
C.Stable
C.اصطبل

156 निर्देश: खालीलपैकी प्रत्येक प्रश्नात, मालिकेमधील एक संख्या चुकीची आहे. चुकीची संख्या शोधा.

2, 3, 9, 27, 112, 565, 3396

DIRECTION: In each of the following questions, one number is wrong in the series. Find out the wrong number.

2, 3, 9, 27, 112, 565, 3396

ہدایت ہر سوال میں یک نمبر غلط ہے . اس غلط نمبر کو کھوجے .

2, 3, 9, 27, 112, 565, 3396

A.565
A.565
A.565

B.9
B.9
B.9

C.112
C.112
C.112

D.27
D.27
D.27

Answer: B.9
B.9
B.9

157 खालील समीकरणाचे मूल्य काढा:

2143.120 + 1629.01 – 1863.0021 – 218.1008 = ?

Find the value of following expression:

2143.120 + 1629.01 – 1863.0021 – 218.1008 = ?

درج ذیل مساوات کی قیمت معلوم کریں:

2143.120 + 1629.01 – 1863.0021 – 218.1008= ?

A.4261.6211000000003
A.4261.6211000000003
A.4261.6211000000003

B.1521.0119999999999
B.1521.0119999999999
B.1521.0119999999999

C.1691.0271
C.1691.0271
C.1691.0271

D.1844.2861
D.1844.2861
D.1844.2861

Answer: C.1691.0271
C.1691.0271
C.1691.0271

158 दिलेल्या पर्यायांपैकी वेगळे ते निवडा:

Select the odd one out from the given options:

دیے گئے اختیارات میں سے بے جوڑ کو منتخب کریں:

A.चमचा
A.Spoon
A.چمچ

B.टोपली
B.Basket
B.ٹوکری

C.प्लेट
C.Plate
C.پلیٹ

D.वाडगे
D.Bowl
D.پیالہ

Answer:
B.टोपली
B.Basket
B.ٹوکری

159
"लाईफ डिवाइन" या पुस्तकाचे लेखक कोण आहेत?

Who is the author of the book “Life Divine”?

کتاب ’’لائف ڈوائن‘‘ کے مصنف ہیں :

A.अवनिद्रनाथ टागोर
A.Abanindranath Tagore
A.ابیندرنداتھ ٹیگور

B.स्वामी विवेकानंद
B.Swami Vivekananda
B.سوامی وویکانند

C.अरबिंदो घोष
C.Aurobindo Ghosh
C.آروبند و گھوش

D.यांपैकी कोणी नाही
D.None of these
D.انمیں سے کوئی نہیں

Answer:
C.अरबिंदो घोष
C.Aurobindo Ghosh
C.آروبند و گھوش

160 सूचना: खालील प्रश्नात उत्तरातील पर्यायांपैकी कोणत्या पर्यायी आकृतीत प्रश्नातील आकृती अंतर्भूत आहे?

DIRECTIONS: In the given question find the answer figure in which question figure is embedded.

ہدایات: دئے گئے سوال میں جواب کی اس تصویر کو تلاش کریں جس میں سوالات کی تصویرمنسلک ہے۔



A. 1

B. 2

C. 3

D. 4

Answer: A. 1

161 निर्देश: खालील शब्दांची इंग्रजी शब्दकोशानुसार मांडणी करा.
(1) Spruce
(2) Spume
(3) Spree
(4) Spurt
(5) Sprawl

DIRECTIONS: Arrange the following words according to the English dictionary.
(1) Spruce
(2) Spume
(3) Spree
(4) Spurt
(5) Sprawl

ہدایت: انگریزی لغت کے مطابق مندرجہ ذیل الفاظ کو مرتب کریں۔

Spruce (1)
Spume (2)
Spree (3)
Spurt (4)
Sprawl(5)

A.5, 3, 1, 2, 4
A.5, 3, 1, 2, 4
A.5, 3, 1, 2, 4

B.1, 2, 3, 4, 5
B.1, 2, 3, 4, 5
B.1, 2, 3, 4, 5

C.3, 5, 1, 4, 2
C.3, 5, 1, 4, 2
C.3, 5, 1, 4, 2

D.5, 4, 3, 2, 1
D.5, 4, 3, 2, 1
D.5, 4, 3, 2, 1

Answer: A.5, 3, 1, 2, 4
A.5, 3, 1, 2, 4
A.5, 3, 1, 2, 4

162 विद्यार्थी-केंद्रीत पद्धत म्हणजे—

Pupil-centred method means—

شاگرد کی مرکزیت پر مبنی طریقے کا مطلب ہے کہ

A.विद्यार्थी-केंद्रीत शिकवण्याची पद्धत
A.Pupil-oriented teaching method
A.شاگرد کی دلچسپیوں پر مبنی طریقہ تدریس

B.बाल-समर्थन पद्धत
B.Child-supportive method
B.اطفال معاون طریقہ

C.पूर्वग्रहमुक्तपणे शिकणे
C.Liberal learning
C.آزادانہ سیکھنا

D.वरील सर्व
D.All of the above
D.مذکورہ تمام

Answer: D.वरील सर्व
D.All of the above
D.مذکورہ تمام

163 पाण्यातील प्राणी याच्या साहाय्याने श्वास घेतात _____

Aquatic animals breathe with the help of _____

آبی جانوروں _____ کی مدد سے سانس لیتے ہیں

A.फुफ्फुसे
A.Lungs
A.پھیپھڑے

B.खवले
B.Gills
B.گلپھڑے

C.नाक
C.Nose
C. ناک

D.तोंड
D.Mouth
D. منہ

Answer: B.खवले
B.Gills
B.گلپھڑے

164 सूचनाः दिलेल्या पर्यायांमधून ऍनालॉगस शब्द निवडा.

अनेस्थेशियोलॉजिस्टचा संबंध अनेस्थेशिया देण्याशी आहे जसा डर्मेटोलॉजिस्टचा संबंध ...सोबत आहे.

DIRECTIONS: Choose the analogous word from the given alternatives.

Anesthesiologist is to Administration of anesthesia as Dermatologist is to _____.

ہدایات: دیے گئے متبادل سے مطابق لفظ کا انتخاب کریں

انستھسولوجسٹ کا ویسا ہی تعلق ہے انستھسیہ انتظامیہ کے ساتھ جیسا کہ درماتولوجست کا ------- کے ساتھ.

A.हृदय
A.Heart
A. دل

B.लहान मुले
B.Children
B. بچوں

For More Info And Videos About TAIT-Exam Syllabus And Other Exam Visit My Channel
TAIT च्या 30 प्रश्नपत्रिका PDF
BADSHAHimp Available Request 9765226781
YouTube WWW.YouTube.com/BADSHAHimp
Subscribe My Channel

C.त्वचा
C.Skin
C. جلد

D.डोळे
D.Eyes
D. آنکھوں

Answer: C.त्वचा
C.Skin
C. جلد

165 सूचना: खाली दिलेल्या प्रश्नात एक विधान आहे ज्याचे I आणि II असे दोन निष्कर्ष त्याखाली अंकित केलेले आहेत. या आधारे सर्वात योग्य पर्याय निवडा.

विधान:
जॉबीने त्याच्या स्वत:च्या घरातून एक लहानसे ऑफिस काढून नवीन व्यवसाय चालू केला. आज त्याच्या यशाने त्याच्यातील दानशूर व्यक्तिमत्त्वाला उजाळा दिला आहे आणि त्याने २०० दशलक्ष डॉलरपेक्षा जास्त रक्कम वेगवेगळ्या गोष्टींसाठी दान केली आहे.

निष्कर्ष:
I. जॉबी अमेरिकेत आहे.
II. जॉबी कंजूष आहे.

DIRECTIONS: The question below has a statement followed by two conclusions numbered I and II. Based on this choose the option that is most suitable.

Statement:
Joby launched Market Lane from a small office in his own apartment. Today the success has sparked his charitable side and he has given over USD 200 million to numerous causes.

Conclusions:
I. Joby is from the USA.
II. Joby is a miser.

ہدایات: نیچے دیے گئے سوال میں ایک بیان کے بعد دو نتائج I اور II دیے گئے ہیں۔ اس کی بنیاد پر انتہائی موزوں آپشن کا انتخاب کیجیے۔

بیان:
جوبی نے اپنے اپارٹمنٹ میں ایک چھوٹے سے دفتر سے مارکیٹ لین کا آغاز کیا. آج کامیابی نے اسمیں مخیرانہ اوصاف اجاگر کئے ہیں اور اس نے کئی ضرورت مند جگہوں پر 200 ملین امریکی ڈالر دیئے ہیں.

نتیجے:
I. جوبی کا تعلق امریکہ سے ہے.
II. جوبی کنجوس ہے.

A.केवळ निष्कर्ष क्रमांक I विधानास अनुसरून आहे
A.Only Conclusion I follows
A.صرف نتیجہ I لاگو ہو گا۔

B.केवळ निष्कर्ष क्रमांक II विधानास अनुसरून आहे
B.Only Conclusions II follows
B. صرف نتیجہ II لاگو ہو گا۔

C.निष्कर्ष क्रमांक I किंवा II अनुसरून आहे
C.Either I or II follows
C. I یا II میں سے ایک لاگو ہو گا۔

D.कोणताही निष्कर्ष अनुसरून नाही
D.Neither I nor II follow
D. I اور II میں سے کوئی بھی لاگو نہیں ہو گا۔

Answer: D.कोणताही निष्कर्ष अनुसरून नाही
D.Neither I nor II follow
D. I اور II میں سے کوئی بھی لاگو نہیں ہو گا۔

166 वरच्या बाजुच्या प्रक्षेपकातून वस्तुची प्रक्षेपित झालीली प्रतिमा — पाहिली जाते

The article's image projected through overhead-projector is seen—

اوورہیڈ پروجیکٹر کے ذریعے پیش کردہ آرٹیکل کی تصویر دیکھی گئی ہے۔

A.स्पीकरच्या माथ्यावर
A.On the head of the speaker
A.اسپیکر کے سر پر

B.स्पीकरचा माथा आणि मागील बाजूवर
B.On the head and backside of the speaker
B.اسپیکر کے سر اور پچھلے حصے پر

C.पडद्यावर स्पीकरचा माथा आणि मागील बाजूवर
C.On the head and backside of the speaker on a screen
C.اسکرین پر اسپیکر کے سر اور پچھلے حصے پر

D.वरीलपैकी कोणतेही नाही
D.None of the above
D.اوپر میں سے کوئی نہیں

Answer: C.पडद्यावर स्पीकरचा माथा आणि मागील बाजूवर
C.On the head and backside of the speaker on a screen
C.اسکرین پر اسپیکر کے سر اور پچھلے حصے پر

167 सूचना: अर्थपूर्ण परिच्छेद निर्माण करण्यासाठी, खाली दिलेली (P), (Q) (R), (S) आणि (T) ही पाच वाक्ये योग्य अनुक्रमाने पुनर्रचना करा; त्यांनतर खालील प्रश्नांची उत्तर द्या.

P. मेजवानीसाठी गाढव देण्याचे आश्वसन देत चतुर कोल्ह्याने आपल्याला जीवदान देण्याची विनंती केली.
Q. गाढवावर ताबा मिळविल्यानंतर सिंह कोल्ह्यावरही उडी मारतो आणि दोघांनाही खाऊन टाकतो.
R. गाढव आणि कोल्हा हे दोघे मित्र एका जंगलात अन्न शोधण्यासाठी जातात.
S. मग सिंहाबरोबर कोल्हा असे दोघेजण गाढवाला फसवून एका खड्यात पडतात.
T. जंगलात जाताना, त्यांना खाऊन टाकण्याच्या अपेक्षेने वाटेत सिंह आडवा येतो.

पुनर्रचना केल्यानंतर खालीलपैकी कोणते वाक्य चौथे असेल?

DIRECTION: Rearrange the following five sentences (P), (Q), (R), (S) and (T) in the proper sequence to form a meaningful paragraph; then answer the questions given below them.
P. The cunning fox promises the lion that he can have the ass for dinner, but asks that his life be spared.
Q. As soon as the ass was secured, the lion jumps at the fox, killing it for its meat and ends up having both.
R. Two partners, the ass and the fox, go to a forest to find food.
S. So, together the lion and the fox trick the ass and make him fall into a pit.
T. On their way to the forest, they meet a lion who wishes to eat both.

Which of the following should be the FOURTH sentence after rearrangement?

ہدایات: ان پانچ جملوں (P)، (Q)، (R)، (S) اور (T) کو با معنی پیرا بنانے کے لئے دوبارہ ترتیب دیجئے، پھر نیچے دے گئے سوالوں کے جواب دیجئے

P. للالچی لومڑی نے شیر سے وعدہ کیا کی وو خچر کو کھا لے، لیکن اسے چھوڈ دے.
Q. جب اسنے خچر کو مارا، شیر لومڑی پی جپٹا،اپنے گوشت کے لئے مارا اور دونو کو مار دیا.
R. دو دوست، خچر اور لومڑی ، جنگل میں کھانا ڈھونڈ نے کے لئے گئے.
S. تو، شیر اور لومڑی نے ملکے خچر کو فسانے کی چال کی اور اسکا شکار کرنے کہ ارادہ کیا.
T. جنگل جاتے وقت، انکو ایک شیر ملا جو ان دونو کو کھانا چاہتا تھا.

دوبارہ ترییب دینے کے بعد کون سا جملہ چوتھا ہونا چاہیے؟ I

A.S
A.S
A.S

B.P
B.P
B.P

C.R
C.R
C.R

D.T
D.T
D.T

Answer: A.S
A.S
A.S

168 त्विरोधात ठोस पुरावे असूनही चुकीचा विश्वास असणे

A false belief held despite strong evidence against it

غلط سوچ کی پکڑہو ہی جاتی ہے چاہے اس کے پاس کتنے ہی مضبوط ثبوت کیوں نہ ہوں

A.आभास
A.Hallucination
A.واہمہ

B.भ्रम
B.Delusion
B.مغالطہ

C.A ते B दोन्ही
C.A to B both
C.a اور b دونوں

D.बायपोलर डिसऑर्डर (द्विध्रुवीय विकार)
D.Bipolar disorder
D.دو قطبی خرابی

Answer: B.भ्रम
B.Delusion
B.مغالطہ

169 413×40×18 = ?

413×40×18 = ?

413×40×18 = ?

A.297306
A.297306
A.297306

B.273960
B.273960
B.273960

C.297360
C.297360
C.297360

D.293760
D.293760
D.293760

Answer: C.297360
C.297360
C.297360

170 निर्देश: खालील प्रत्येक वर्ण मालिके मध्ये, काही अक्षरे गहाळ आहेत, जे खाली दिलेल्या पर्यायां मध्ये एका क्रमाने दिलेली आहेत. योग्य पर्याय निवडा.

cccbb - aa - cc - bbbaa - c

DIRECTION: In each of the following letter series, some of the letters are missing, which are given in that order as one of the alternatives below it. Choose the correct alternative.

cccbb - aa - cc - bbbaa - c

ہدایت نیچے دے حرف کے سرج مے کچھ حرف گمشدہ ہے نیچے دے گئے اختیارات سے سسہی اختیار چنے

cccbb - aa - cc - bbbaa - c

A.acbc
A.acbc
A.acbc

B.baca
B.baca
B.baca

C.baba
C.baba
C.baba

D.acba
D.acba
D.acba

Answer: B.baca
B.baca
B.baca

171 DIRECTIONS: A sentence with an underlined word is given below. Find the Word which is most similar in meaning to the underlined word.
She was completely baffled by his strange behaviour.

A.Confused

B.Assured

C.Convinced

D.Peaceful

Answer: A.Confused

172 गंजलेले लोह—

The rusting of iron—

لوہے کی زنگ __

A.त्याचे वजन घटवते
A.Decreases its weight
A.اس کے وزن کو گٹھا دیتی ہے

B.त्याचे वजन वाढवते
B.Increases its weight
B.اس کے وزن کو بڑھا دیتی ہے

C.समान रहाते
C.Remains same
C.وہی رہتا ہے

D.सांगता येत नाही (अंदाज न लावण्यायोग्य)
D.Can’t say (unpredictable)
D.کچھ نہیں کہہ سکتے (ناقابل پیشن گوئی)

Answer: B.त्याचे वजन वाढवते
B.Increases its weight
B.اس کے وزن کو بڑھا دیتی ہے

173 Out of the given four words only one is not spelt correctly. Find the word that is not correctly spelt.

A.Florescant

B.Fourth

C.Frantically

D.February

Answer: A.Florescant

174 त्रिकोणाचे केंद्र असे निश्चित केले जाते:

The incentre of a triangle is determined by the:

مثلث کی انسنٹر کومتعین کیا جاتا ہے:

A.मध्य
A.Medians
A.میڈی

B.कोन दुभाजक
B.Angle bisector
B.خط تنصیف زاویہ

C.लंब दुभाजक
C.Perpendicular bisectors
C.عموی خطوط تنصیف

D.उंची
D.Altitudes
D.بلندیاں

Answer: B.कोन दुभाजक
B.Angle bisector
B.خط تنصیف زاویہ

175 दिलेल्या पर्यायांपैकी वेगळे ते निवडा:

Select the odd one out from the given options:

دیے گئے اختیارات میں سے بے جوڑ کو منتخب کریں:

A.नट
A.Nut
A.نٹ

B.प्लेट
B.Plate
B.پلیٹ

	C.टायर C.Tyre C.ٹایر
	D.बांगडी D.Bangle D.چوڑی
Answer:	B.प्लेट B.Plate B.پلیٹ

176 सूचना: दोन विधाने आणि त्यानंतर चार निष्कर्ष, I, II, III आणि IV दिले आहेत. ही विधाने सामान्यतः ज्ञात वस्तुस्थितीपेक्षा भिन्न असली तरी सत्य आहेत असे समजा. दिलेल्यापैकी कोणता निष्कर्ष दिलेल्या विधानांवरुन नक्की काढता येऊ शकतो हे तुम्ही ठरवायचे आहे.तुमचे उत्तर सूचित करा.
विधाने:
(a) सर्व मोर सिंह आहेत.
(b) काही वाघ मोर आहेत.
निष्कर्ष:
I. काही सिंह वाघ नाहीत.
II. सर्व वाघ सिंह आहेत.
III. काही वाघ सिंह आहेत.
IV. सर्व मोर वाघ आहेत.

DIRECTION: Two statements are given following by four conclusions, I, II, III and IV. You have to consider that statements to be true, even if they seem to be at variance from commonly known facts. You are to decide which of the given conclusions can definitely be drawn from the given statements. Indicate your answer.

Statements:
(a) All peacocks are lions.
(b) Some tigers are peacocks.

Conclusion:
I. Some lions are not tigers.
II. All tiger are lions.
III. Some tigers are lions.
IV. All peacocks are tigers.

ہدایات: دو سٹیٹمنٹ جوکہ چار خلاصوں پر مشتمل ہیں .I،II، III اور IV. اگرچہ دکہنے میں وہ بہت اپ کو وہ سٹیٹمنٹ درست ماننا ہے، سارے حقاٰق ست مطبقت رکہتی ہو۔ اپ کو دیے گے خلاصوں میں سے یقینی طور پر اسے اختیار کرنا ہے جو سٹیٹمنٹ سے نکلا ہو. اپنا جواب تلاش کرے.

اظہار بیان:
تمام مور شیر ہے.
کچھ چیتے مور ہے.

نتائج:
I. کچھ شیر چیتے نہیں ہوتے.
II. تمام چیتے شیر ہے.
III. کچھ چیتے شیر ہے.
IV. تمام مور چیتے ہے.

A.केवळ निष्कर्ष III निघतो
A.Only conclusion III follows
A. خالی نتائج III تعاقب کرتا ہے

B.केवळ निष्कर्ष IV निघतो
B.Only conclusion IV follows
B. خالی نتائج IV تعاقب کرتا ہے

C.केवळ निष्कर्ष I निघतो
C.Only conclusion I follows
C. تعاقب کرتا ہے I خالی نتائج

D.केवळ निष्कर्ष II निघतो
D.Only conclusion II follows
D. تعاقب کرتا ہے II خالی نتائج

Answer: A.केवळ निष्कर्ष III निघतो
A.Only conclusion III follows
A. تعاقب کرتا ہے III خالی نتائج

177 जेव्हा तुमच्या वर्गामध्ये एखादे मूल बोलताना अडखळत आहे, इतर विद्यार्थी एकत्रितपणे त्याची चेष्टा करत आहेत. तर अशा स्थितीत तुम्ही काय कृती कराल?

When a child is stammering in your class, the students collectively make a mockery of him. What action should you take in this case?

جب آپ کی کلاس میں ایک بچہ ہکلاتا ہے، تو طالب علم اجتماعی طور پر اس کا مذاق کرتے ہیں۔ اس صورت میں آپ کو کیا کارروائی کرنا چاہئے؟

A.वर्गाला एकत्रितपणे शिक्षा करणे
A.Giving collective punishment to the class
A.کلاس کو اجتماعی سزا دینا

B.वक्तृत्व-दोषावर व्याख्यान देणे
B.Giving lecture on speech-defects
B.تقریر کے نقائص پر لیکچر دینا

C.त्या विद्यार्थ्याला सल्ला देणे की भविष्यात जर कोणी त्याची चेष्टा केली, तर ताबडतोब ते तुम्हाला कळवणे
C.Suggesting the student if anybody make a mockery in future, he immediately report it to him
C.طالب علم کو مشورہ دیتے ہیں کہ اگر کوئی مستقبل میں مذاق اڑائے تو، فوری طور پر اس کی اطلاع مجھے دے

D.विद्यार्थ्याला विशेष उपचार करणे
D.Giving therapeutic treatment to the student.
D.طالب علم کو تقریرکاعلاج کروانا.

Answer: B.वक्तृत्व-दोषावर व्याख्यान देणे
B.Giving lecture on speech-defects
B.تقریر کے نقائص پر لیکچر دینا

178 5 दिवसांसाठी 10 महिलांचे वेतन रु. 1250 आहे. जर पुरूषाचे दैनिक वेतन हे महिलेच्या वेतनाच्या दुप्पट असेल. तर रु. 1600 कमवण्यासाठी 8 दिवसांसाठी किती पुरूषांनी काम करावे?

Wages of 10 women for 5 days is Rs. 1250. If daily wage of a man is twice that of a woman. How many men must work for 8 days to earn Rs. 1600?

عورتوں کی 5 دنوں کی مزدوری 1250 روپے ہے۔ اگر مرد کی روزانہ کی مزدوری عورت کی نسبت دوگنی ہے ۔ تو کتنے آدمیوں کو 10 دن کام کرنا ہو ہو گا 1600 کمانے کے لیے؟ 8

A.5 पुरूष
A.5 men
A.5آدمی

B.8 पुरूष
B.8 men
B.8آدمی

C.4 पुरूष
C.4 men
C.4آدمی

D.6 पुरूष
D.6 men
D.6آدمی

Answer: C.4 पुरूष
C.4 men
C.4آدمی

179 सूचना: खालील प्रश्नात, दिलेल्या पर्यायांमधून नातेसंबंध सांगणारी आकृती निवडा.

DIRECTIONS: In the question below, select the related figure from the given alternatives.

ہدایات: ذیل کے سوال میں، دئے گئے متبادلات میں سے متعلقہ تصویر منتخب کریں۔

Problem Figures

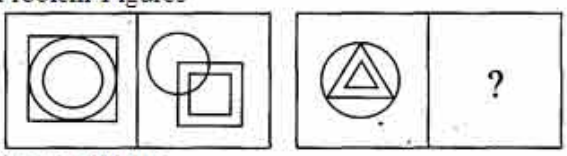

Answer Figure



A. (A)

B. (B)

C. (C)

D. (D)

Answer: D. (D)

180

सूचना: दिलेल्या पर्यायांमधून श्रेणी पूर्ण करणारी योग्य आकृती निवडा.

DIRECTIONS: Complete the series by choosing right figure from the given choices.

ہدایات: دئے گئے انتخابات میں سے صحیح تصویر کو منتخب کرکے سلسلہ مکمل کریں۔

Problem Figures

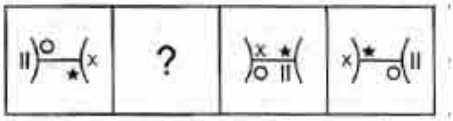

Answer Figures

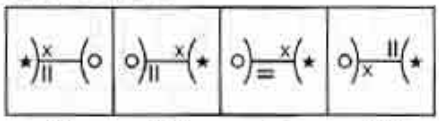

A. (A)

B. (B)

C. (C)

D. (D)

Answer: B. (B)

181 ‘ अनाथालय ’ या शब्दाची संधी सोडवा.

A.अनाथा + लय

B.अनाथ + लय

C.अनाथ + आलंय

D.अनाथ + आलय

Answer: D.अनाथ + आलय

182 $6x^2 + 77x + 121 = 0$ या वर्गसमीकरणाची मुळे आहेत:

The roots of the quadratic equation $6x^2 + 77x + 121 = 0$ are:

$6x^2 + 77x + 121 = 0$ مربع مساوات کے روٹ ہیں:

A.11, 7
A.11, 7
A.11, 7

B.11, 11/6
B.11, 11/6
B.11, 11/6

C.-11,-11/6
C.-11,-11/6
C.-11,-11/6

D.-11,-7
D.-11,-7
D.-11,-7

Answer: C.-11,-11/6
C.-11,-11/6
C.-11,-11/6

183 तीनही सैन्यांचा मुख्य सेनापती कोण आहे??

Who is the Chief Commander of all the three forces?

تینوں افواج کے چیف کمانڈر کون ہے؟

A.पी.एम.
A.P.M.
A. وزیراعظم

B.राष्ट्रपती
B.President
B. صدر

C.संरक्षण मंत्री
C.Defense Minister
C. وزیر دفاع

D.लष्करी कर्मचारी प्रमुख
D.Chief of the Army Staff.
D. چیف آف آرمی اسٹاف.

Answer: B.राष्ट्रपती
B.President
B. صدر

184 सामान्य गतीच्या 3/4 चालून श्वेताला सामान्य वेळेपेक्षा 2 तास जास्त वेळ लागतो. तिचा सामान्य वेळ काढा?

Walking at 3/4 of her normal speed Shweta takes 2 hours more than the normal time. What is the normal time?

معمول کی رفتار کے3/4حصے کے بقدر رفتار پر چلتے ہوئے شویتا اپنے عمومی وقت سے 2 گھنٹے زیادہ لگاتی ہے. عمومی وقت کیا ہے؟

A.4 तास
A.4 hour
A.4 گھنٹے

B.5 तास
B.5 hour
B.5 گھنٹے

C.6 तास
C.6 hour
C.6 گھنٹے

D.8 तास
D.8 hour
D.8 گھنٹے

Answer: C.6 तास
C.6 hour
C.6 گھنٹے

185 सूचना: खालील प्रश्नात उत्तरातील पर्यायांपैकी कोणत्या पर्यायी आकृतीत प्रश्नातील आकृती अंतर्भूत आहे?

DIRECTIONS: In the given question find the answer figure in which question figure is embedded.

ہدایات: دئے گئے سوال میں سے اس جواب والی تصویر کو تلاش کریں جس میں سوال کی تصویر منسلک ہے۔

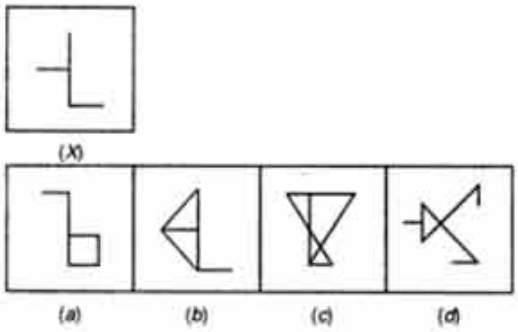

A. (A)

B. (B)

C. (C)

D. (D)

Answer: B. (B)

186 जांभायी येते –

Yawning occurs –

جمائی واقع ہوتی ہے _____

A.रक्तामध्ये CO_2 च्या अतिरिक्त सहंत तीव्रतेमुळे
A.Due to excess concentration of CO_2 in blood
A.خون میں CO2 کے حد سے زیادہ کنسنٹریشن کی وجہ سے

B.फुप्फुसामध्ये CO_2 च्या अतिरिक्त सहंत तीव्रतेमुळे
B.Due to excess concentration of CO_2 in lungs
B.پھیپھڑوں میں CO2 کے حد سے زیادہ کنسنٹریشن کی وجہ سے

C.रक्तामध्ये O_2 च्या अतिरिक्त सहंत तीव्रतेमुळे
C.Due to excess concentration of O_2 in lungs
C.پھیپھڑوں میں O2 کے حد سے زیادہ کنسنٹریشن کی وجہ سے

D.यापैकी एकही नाही
D.None of these
D.ان میں سے کوئی نہیں

Answer: A.रक्तामध्ये CO_2 च्या अतिरिक्त सहंत तीव्रतेमुळे
A.Due to excess concentration of CO_2 in blood
A.خون میں CO2 کے حد سے زیادہ کنسنٹریشن کی وجہ سے

187

सूचना: खालील प्रश्नात उत्तरातील पर्यायांपैकी कोणत्या पर्यायी आकृतीत प्रश्नातील आकृती अंतर्भूत आहे?

DIRECTIONS: In the given question find the answer figure in which question figure is embedded.

ہدایات: دئے گئے سوال میں سے اس جواب والی تصویر کو تلاش کریں جس میں سوال کی تصویر کو جمایا گیا ہے۔

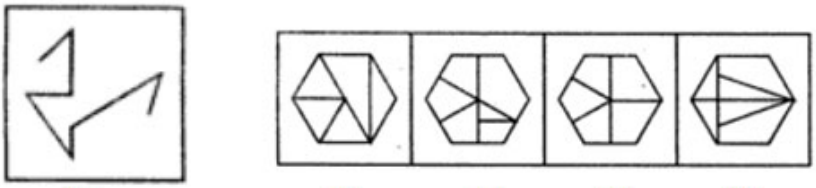

A. (A)

B. (B)

C. (C)

D. (D)

Answer: D. (D)

188 सूचना: खालील माहिती काळजीपूर्वक वाचा आणि खालील प्रश्नांची उत्तरे द्या:
P, Q, R, S, T, V आणि W सत्रामधले सात सहभागी आहेत. त्यांच्यात तीन विद्यार्थी, दोन शिक्षक आणि दोन सहयोगी आहेत. ते तीन वेगवेगळ्या गटांमध्ये काम करतात- I, II आणि III. प्रत्येक गटात एक विद्यार्थी आणि किमान एक शिक्षक किंवा एक सहयोगी आहे. S हा विद्यार्थी आहे आणि तो P सोबत III-या गटात आहे. P हा सहयोगी आहे. I ल्या गटात केवळ T आणि दुसरा सहयोगी आहे. V हा विद्यार्थी Q सोबत काम करतो, जो W सोबत काम करत नाही. शिक्षक W, R सोबत काम करत नाही.
खालीलपैकी कोणत्या जोडीत दोन शिक्षक असतील?

DIRECTIONS: Study the following information carefully and answer the questions given below:
P, Q, R, S, T, V and W are seven participants in a seminar. There are three students, two Lecturers and two assistants among them. They work in three different groups I, II and III. In each group there is one student and at least one Lecturer or one assistant. S is a student and is in group III with P, an assistant. The other assistant is in group I with only T. V, a student works with Q who does not work with W. Lecturer W does not work with R.
Which of the following pair expresses two Lecturers?

ہدایات: مندرجہ ذیل معلومات کو دھیان سے پڑھیں اور نیچے دیے گئے سوالوں کے جواب دیں۔
ایک سیمنار میں سات شرکاء ہیں۔ ان میں سے تین طالب علم، دو لیکچرر اور دو معاونین ہیں۔ وہ تین مختلف W اور P، Q، R، S، T، V ایک طالب علم ہے S میں کام کرتے ہیں۔ ہر گروپ میں ایک طالب علم اور کم سے کم ایک لیکچرر یا ایک معاون ہیں۔ III اور II، I گروپ کے ساتھ Q ایک طالب علم، V کے ساتھ ہے۔ T میں صرف I کے ساتھ ہے، جو ایک معاون ہے۔ دوسرا معاون گروپ P میں III اور گروپ کے ساتھ کام نہیں کرتا ہے۔ R، W کے ساتھ کام نہیں کرتا ہے۔ لیکچرر W کام کرتا ہے جو
مندرجہ ذیل میں سے کون سی جوڑی دو لیکچر کو ظاہر کرتی ہے؟

A.PW
A.PW
A.PW

B.PQ
B.PQ
B.PQ

C.PR
C.PR
C.PR

D.QW
D.QW
D.QW

Answer: D.QW
D.QW
D.QW

189

सूचना: खालील प्रश्नात, दिलेल्या पर्यायांमधून नातेसंबंध सांगणारी आकृती निवडा.

DIRECTIONS: In the question below, select the related figure from the given alternatives.

ہدایات: ذیل کے سوال میں، دئے گئے متبادلات میں سے متعلقہ تصویر منتخب کریں۔

Question Figures



Answer Figures



(A) (B) (C) (D)

A. (A)

B. (B)

C. (C)

D. (D)

Answer: B. (B)

190

प्रश्नासाठी सूचना: खालील मालिका पूर्ण करा.

1L2, 1M3, 1N4, ?

DIRECTION: Complete the following series.

1L2, 1M3, 1N4, ?

سوال کے لیے ہدایت:مندرجہ ذیل سیریز کو مکمل کریں۔

1L2, 1M3, 1N4, ?

A.105
A.105
A.105

B.2T0
B.2T0
B.2T0

C.1O5
C.1O5
C.1O5

D.1L2
D.1L2
D.1L2

Answer: A.105
A.105
A.105

191 _____ हा दोन किंवा अधिक व्यक्तींची आयोजित प्रणाली असते.

_____ are organized systems of two or more individuals

_____-دو یا زائد افراد پر مشتمل منظم سسٹم ہیں

A.गर्दी करणे
A.Mob
A.ہجوم

B.श्रोते
B.Audience
B.سامعین

C.समुह
C.Group
C.گروپ

D.गर्दी
D.Crowd
D.بھیڑ

Answer: C.समुह
C.Group
C.گروپ

192 बाल विकास हे असे अभ्यास क्षेत्र आहे ज्यात

Child development is defined as a field of study that

مطالعہ کے میدان میں بچہ کی ترقی کی تشریح کی گئی ہے کہ

A.मानवी क्षमतांमधील बदल पडताळणे
A.Examines change in human abilities
A.انسان کی اہلیت میں آنے والے بدلاو کی جانچ کریں

B.जीवनकाळातील वर्तनाचे स्पष्टीकरण देण्याचा प्रयत्न करण्यात येतो
B.Seeks to explain behavior across life span
B.زندگی کے پورے عرصہ میں کردارسازی کی وضاحت طلب کرتا ہے

C.मुलांची प्रौढांशी तुलना करण्यात येते
C.Compares children to adults
C.بچوں کا بالغوں کے ساتھ موازنہ کرتا ہے

D.मुलाच्या आकलनात्मक, सामाजिक व इतर क्षमतांच्या हळूहळू होणाऱ्या उत्क्रांतीसाठी कारणीभूत आहे
D.Accounts for the gradual evolution of child's cognitive, social and the other capacities
D.بچے کے ادراکی، سماجی اور دیگر اہلیتوں کے قدم بہ قدم ارتقاء کا حساب لگاتے ہیں

Answer: D.मुलाच्या आकलनात्मक, सामाजिक व इतर क्षमतांच्या हळूहळू होणाऱ्या उत्क्रांतीसाठी कारणीभूत आहे
D.Accounts for the gradual evolution of child's cognitive, social and the other capacities
D.بچے کے ادراکی، سماجی اور دیگر اہلیتوں کے قدم بہ قدم ارتقاء کا حساب لگاتے ہیں

193 अनुक्रम 6, 12, 24,…… चे 5वे पद शोधा.

Find the 5th term of the sequence: 6, 12, 24,……

24 ,12 ,6 ؟ اس سرج کی پانچوی ٹرم کیا ہے,……

A.92
A.92
A.92

B.96
B.96
B.96

C.98
C.98
C.98

D.52
D.52
D.52

Answer: B.96
B.96
B.96

194 एड्यूसॅट' हा एक— आहे

'Edusat' is a—

'اداسات' ایک ہے

For More Info And Videos About TAIT-Exam Syllabus And Other Exam Visit My Channel
TAIT च्या 30 प्रश्नपत्रिका PDF Available Request 9765226781
BADSHAHimp
WWW.YouTube.com/BADSHAHimp
Subscribe My Channel

A.शैक्षणिक उपग्रह
A.Educational satellite
A.تعلیمی سیٹلائٹ

B.सूचनात्मक उपग्रह
B.Instructional satellite
B.ہدایتی سیٹلائٹ

C.सूचनात्मक तंत्रज्ञान
C.Instructional technology
C.ہدایتی ٹیکنالوجی

D.सूचनात्मक साधन
D.Instructional device
D.ہدایتی آلہ

Answer:
A.शैक्षणिक उपग्रह
A.Educational satellite
A.تعلیمی سیٹلائٹ

195 _____ ने हिन्दीमध्ये प्रथम समुह चाचणी विकसित केली.

_____ developed first group test of intelligence in Hindi.

_____ نے ہندی میں ذہانت کا پہلا گروپ ٹسٹ بنایا.

A.डॉ. राईस
A.Dr. Rice
A.ڈاکٹر رائس

B.डॉ. एस. एम. मोहसिन
B.Dr S.M. Mohsin
B.ڈاکٹر ایس ایم محسن

C.महालनोबिस
C.Mahalanobis
C.مہالانوبس

D.अल्फ्रेट बेनेट
D.Alfred Benet
D.الفریڈ بنٹ

Answer:
B.डॉ. एस. एम. मोहसिन
B.Dr S.M. Mohsin
B.ڈاکٹر ایس ایم محسن

For More Info And Videos About TAIT-Exam Syllabus And Other Exam Visit My Channel
TAIT च्या 30 प्रश्नपत्रिका PDF
BADSHAHimp Available Request 9765226781
WWW.YouTube.com/BADSHAHimp
Subscribe My Channel

196 जर बॉलला रॅकेट म्हटले, रॅकेटला बॅट म्हटले, बॅटला फुटबॉल म्हटले, फुटबॉलला शटल म्हटले, आणि शटलला हॉकी म्हटले, तर कशासोबत आपण बेसबॉल खेळू शकतो?

If ball is called racket, racket is called bat, bat is called football, football is called shuttle and shuttle is called hockey, we can play baseball with

اگر گیند کو ٹینس کا بلا، ٹینس کے بلے کو کرکٹ کا بلا، کرکٹ کے بلے کو فٹبال، فٹبال کو شٹل اور شٹل کو ہاکی کہا جائے تو، ہم بیسبال کس سے کھیل سکتے ہیں؟

A.फुटबॉल
A.Football
A.فٹبال

B.शटल
B.Shuttle
B.نالی

C.बॅट
C.Bat
C.بلا

D.हॉकी
D.Hockey
D.ہاکی

Answer: A.फुटबॉल
A.Football
A.فٹبال

197 पुढील जोडशब्द पूर्ण करा . ‘ शेती ----------’

A.मजूर

B.मजुरी

C.वाडी

D.माती

Answer: C.वाडी

198 DIRECTIONS: A sentence with an underlined phrasal verb is given below. Out of the four options, choose the one which can be substituted for the given phrasal Verb.
The army put down the rebellion.

For More Info And Videos About TAIT-Exam Syllabus And Other Exam Visit My Channel
TAIT च्या 30 प्रश्नपत्रिका PDF
BADSHAHimp Available Request 9765226781
WWW.YouTube.com/BADSHAHimp
Subscribe My Channel

A.suppressed

B.agitated

C.excited

D.aroused

Answer: A.suppressed

199

सूचना: कळीची (मुख्य) आकृती घड्याळाच्या दिशेने किंवा विरुद्ध दिशेने (दिशादर्शक बाण दर्शवितो आहे त्याप्रमाणे) 90^0 फिरविली. दिलेल्या चार पर्यायी आकृत्यांमधील कोणती आकृती या फिरविलेल्या कळीच्या आकृतीचे प्रतिनिधित्व करते आहे?

DIRECTIONS: When the key figure is rotated one step clockwise OR anticlockwise (depending upon the direction of arrow shown), which of the Answer figures given will represent the main figure in the rotated form?

ہدایات : جب کسی مخصوص تصویر کو گھڑی کی چال کی سمت میں یا گھڑی کی چال کی الٹی سمت میں (گھڑی کی سمت کی طرف اشارہ کرنے والے تیر پر منحصر) ایک قدم گھمایا جاتا ہے، تو دئے گئے جواب کی تصاویر میں سے کون خاص تصویر میں گھمائی گئی شکل کی نمائندگی کریگا؟



Answer Figures

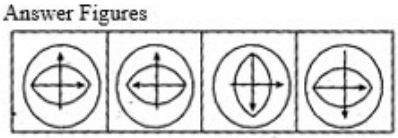

A. (A)

B. (B)

C. (C)

D. (D)

Answer: D. (D)

200 खालीलपैकी शुद्ध वाक्य कोणते ?

A.या निवडणुकीत त्याचा पराभव झाला.

B.या निवडणुकीला त्याचा पराभव झाला.

C.या निवडणुकीत त्याला पराभव झाला.

D.या निवडणुकीत त्यास पराभव झाला.

For More Info And Videos About TAIT-Exam Syllabus And Other Exam Visit My Channel
TAIT च्या 30 प्रश्नपत्रिका PDF
BADSHAHimp Available Request 9765226781
WWW.YouTube.com/BADSHAHimp
Subscribe My Channel

Answer:	A.या निवडणुकीत त्याचा पराभव झाला.

For More Info And Videos About TAIT-Exam Syllabus And Other Exam Visit My Channel
TAIT च्या 30 प्रश्नपत्रिका PDF
BADSHAHimp Available Request 9765226781
WWW.YouTube.com/BADSHAHimp
Subscribe My Channel

Question Paper Title : TAIT_PAPER_21

Date of Exam : 2017-12-21 09:00:00.0

1	खालीलपैकी पुल्लिंगी शब्द ओळखा.
	A.विश्व
	B.विश्वविद्यालय
	C.विश्वास
	D.विश्रांती
Answer:	C.विश्वास

For More Info And Videos About TAIT-Exam Syllabus And Other Exam Visit My Channel
TAIT च्या 30 प्रश्नपत्रिका PDF
BADSHAHimp Available Request 9765226781
WWW.YouTube.com/BADSHAHimp
Subscribe My Channel

2 सूचना: अर्थपूर्ण परिच्छेद निर्माण करण्यासाठी, खाली दिलेली (P), (Q) (R), (S) आणि (T) ही पाच वाक्ये योग्य अनुक्रमाने पुनर्रचना करा; त्यांनतर खालील प्रश्नांची उत्तर द्या.

P. "मला तहान भागवायची आहे." असा तो विचार करतो.
Q. विविध प्रकारे प्रयत्न करूनही तो द्राक्षांच्या घडाजवळ पोहचत नाही.
R. "ती आंबट आहेत याची मला खात्री आहे," असे म्हणत अखेर तो आपले प्रयत्न सोडून देते.
S. गरम उन्हाळ्यात एके दिवशी एक कोल्हा एका द्राक्षांच्या बागेत जातो आणि पिकलेल्या द्राक्षांचा घड लटकलेला पाहतो.
T. तो थोडे अंतर मागे जाते, मग पळत येऊन उडी मारतो, पण द्राक्षापर्यंत पोहचयाला उडी कमी पडते.

पुनर्रचना केल्यानंतर खालीलपैकी कोणते वाक्य चौथे असेल?

DIRECTION: Rearrange the following five sentences (P), (Q), (R), (S) and (T) in the proper sequence to form a meaningful paragraph; then answer the questions given below them.
P. It thinks: “Just what I need to quench my thirst.”
Q. It tries in different ways to reach the bunch of grapes, but in vain.
R. It finally gives up saying “I am sure they are sour anyway.”
S. On a hot summer day, a fox comes upon an orchard and sees a bunch of ripened grapes.
T. It moves back a few paces, runs, and jumps but falls short of reaching the grapes.

Which of the following should be the FOURTH sentence after rearrangement?

ہدایات: ان پانچ جملوں (P)، (Q)، (R)، (S) اور (T) کو با معنی پیرا بنانے کے لئے دوبارہ ترتیب دیجئے، پھر نیچے دے گئے سوالوں کے جواب دیجئے

P. اسنے سونچا: " بلکل جو مجھے پیاس بجانے کے لئے چاہیے.
Q. اسنے انگور تک پہنچ نے کے کہی طریقے اختیار کے، مگر سارے ناکام.
R. آخر کار اسنے یہ ارادہ چھوڈ دیا یہ کہکر" مجھے یکین ہے کہ یے ویسے بھی کھٹے ہے."
S. ایک گرمی کے دن، ایک لومڑی باغ میں آی اور انگور کہ گچھا دیکھا.
T. وو کچھ کدم پیچھے گی، دھوڈی ، اور چھلانگ لگائی لکی انگور تک نہی پہنچی.

دوبارہ ترییب دینے کے بعد کون سا جملہ چوتھا ہونا چاہیے؟

A.Q
A.Q
A.Q

B.S
B.S
B.S

C.P
C.P
C.P

D.T
D.T
D.T

For More Info And Videos About TAIT-Exam Syllabus And Other Exam Visit My Channel
TAIT च्या 30 प्रश्नपत्रिका PDF
BADSHAHimp Available Request 9765226781
WWW.YouTube.com/BADSHAHimp
Subscribe My Channel

Answer: A.Q
A.Q
A.Q

3 खालीलपैकी शुद्ध वाक्य कोणते ?

A.पाहुण्यांचे विमान विमानतळाला उतरले.

B.पाहुण्यांचे विमान विमानतळामधे उतरले.

C.पाहुण्यांचे विमान विमानतळावर उतरले.

D.पाहुण्यांचे विमान विमानतळात उतरले.

Answer: C.पाहुण्यांचे विमान विमानतळावर उतरले.

4 'शुष्क' या शब्दाचा विरुद्धार्थी शब्द कोणता ?

A.कोरडे

B.रसाळ

C.निरस

D.रसहीन

Answer: B.रसाळ

5 आयटी म्हणजे—

IT stands for—

آئی ٹی کا مطلب ہے

A.इन्फरमेशन टेक्नॉलॉजी
A.Information technology
A.انفارمیشن ٹیکنالوجی

B.इंटिग्रेटेड टेक्नॉलॉजी
B.Integrated technology
B.انٹیگریٹیڈ ٹیکنالوجی

C.इंटलिजंट टेक्नॉलॉजी
C.Intelligent technology
C.انٹیلیجینٹ ٹیکنالوجی

D.इंटरेस्टिंग टेक्नॉलॉजी
D.Interesting technology
D.انٹریسٹنگ ٹیکنالوجی

Answer: A.इन्फरमेशन टेक्नॉलॉजी
A.Information technology
A.انفارمیشن ٹیکنالوجی

6 सूचना: अर्थपूर्ण परिच्छेद निर्माण करण्यासाठी, खाली दिलेली (P), (Q) (R), (S) आणि (T) ही पाच वाक्ये योग्य अनुक्रमाने पुनर्रचना करा; त्यांनतर खालील प्रश्नांची उत्तर द्या.

P. "मला तहान भागवायची आहे." असा तो विचार करतो.
Q. विविध प्रकारे प्रयत्न करूनही तो द्राक्षांच्या घडाजवळ पोहचत नाही.
R. "ती आंबट आहेत याची मला खात्री आहे," असे म्हणत अखेर तो आपले प्रयत्न सोडून देते.
S. गरम उन्हाळ्यात एके दिवशी एक कोल्हा एका द्राक्षांच्या बागेत जातो आणि पिकलेल्या द्राक्षांचा घड लटकलेला पाहतो.
T. तो थोडे अंतर मागे जाते, मग पळत येऊन उडी मारतो, पण द्राक्षापर्यंत पोहचयाला उडी कमी पडते.

पुनर्रचना केल्यानंतर खालीलपैकी कोणते वाक्य दुसरे असेल?

DIRECTION: Rearrange the following five sentences (P), (Q), (R), (S) and (T) in the proper sequence to form a meaningful paragraph; then answer the questions given below them.
P. It thinks: “Just what I need to quench my thirst.”
Q. It tries in different ways to reach the bunch of grapes, but in vain.
R. It finally gives up saying “I am sure they are sour anyway.”
S. On a hot summer day, a fox comes upon an orchard and sees a bunch of ripened grapes.
T. It moves back a few paces, runs, and jumps but falls short of reaching the grapes.

Which of the following should be the SECOND sentence after rearrangement?

ہدایات: ان پانچ جملوں (P)، (Q)، (R)، (S) اور (T) کو با معنی پیرا بنانے کے لئے دوبارہ ترتیب دیجئے، پھر نیچے دے گئے سوالوں کے جواب دیجئے

P. اسنے سونچا: " بلکل جو مجھے پیاس بجانے کے لئے چاہیے.
Q. اسنے انگور تک پہنچ نے کے کہی طریقے اختیار کے، مگر سارے ناکام.
R. آخر کار اسنے یہ ارادہ چھوڈ دیا یہ کہکر" مجھے یکین ہے کہ یے ویسے بھی کھٹے ہے."
S. ایک گرمی کے دن، ایک لومڑی باغ میں آی اور انگور کہ گچھا دیکھا.
T. وو کچھ کدم پیچھے گی، دھوڈی ، اور چھلانگ لگائی لکی انگور تک نہی پہنچی.

دوبارہ ترییب دینے کے بعد کون سا جملہ دوسرا ہونا چاہیے؟

For More Info And Videos About TAIT-Exam Syllabus And Other Exam Visit My Channel
TAIT च्या 30 प्रश्नपत्रिका PDF
BADSHAHimp Available Request 9765226781
WWW.YouTube.com/BADSHAHimp
Subscribe My Channel

A.P
A.P
A.P

B.S
B.S
B.S

C.R
C.R
C.R

D.T
D.T
D.T

Answer: A.P
A.P
A.P

7 खूळेपणाचे लक्षण आहे

Symptom of mania is

جنون کی علامات ہیں:

A.प्रेरक वर्तन
A.Impulse behaviour
A.ہیجان انگیز رویہ

B.अत्यानंद
B.Euphoric
B.بے انتہا خوشی

C.निद्रानाश
C.Insomnia
C.بے خوابی

D.दिलेले सर्व
D.All mentioned
D. مذکورہ تمام

Answer: A.प्रेरक वर्तन
A.Impulse behaviour
A.ہیجان انگیز رویہ

For More Info And Videos About TAIT-Exam Syllabus And Other Exam Visit My Channel
BADSHAHimp TAIT च्या 30 प्रश्नपत्रिका PDF Available Request 9765226781
WWW.YouTube.com/BADSHAHimp Subscribe My Channel

8 सूचना: प्रत्येक प्रश्नाला एक प्रमुख विधानासोबत चार विधाने आहेत ज्यांच्याखाली A, B, C आणि D असे चार विधान आहेत. क्रमवार विधानांची जोडी निवडा ज्यामध्ये प्रथम विधान दुसऱ्या विधानाला सुचवते, आणि दोन्ही विधाने तर्किकदृष्ट्या प्रमुख विधानासोबत निगडित असेल.

जर मी उशीरा उठलो, तर मी ट्रेन चुकवणार
A. मी उशीरा उठलो
B. मी उशीरा उठलो नाही
C. मी ट्रेन चुकवली नाही
D. मी ट्रेन चुकवली

DIRECTIONS: Each question has a main statement followed by four statements labelled A, B, C and D. Choose the ordered pair of statements, where the first statement implies the second, and the two statements are logically consistent with the main statement.

If I wake up late, I will miss the train
A. I woke up late
B. I did not wake up late
C. I did not miss the train
D. I missed the train

ہدایت: ہر سوال میں ایک جملہ ہے جسکے بعد چار جملےاے، بی،سی اور ڈی کے نام سے دئے گئے ہیں اسمیں منسلک جوڑیوں کو چنئے۔ جہاں پہلا جملہ دوسرے جملہ کی اور اشارہ کر رہا ہے اور دو جملے منطقی مرکزی بیان کے مطابق ہیں

اگر میں لیٹ اٹھا تو ٹرین مس ہو جائے گی
Aمیں لیٹ اٹھا ۔
Bمیں لیٹ نہیں اٹھا ۔
Cمیں نے ٹرین مس نہیں کی ۔
Dمیں نے ٹرین مس کر دی ۔

A.AD
A.AD
A.AD

B.BC
B.BC
B.BC

C.DA
C.DA
C.DA

D.CD
D.CD
D.CD

For More Info And Videos About TAIT-Exam Syllabus And Other Exam Visit My Channel
TAIT च्या 30 प्रश्नपत्रिका PDF
BADSHAHimp Available Request 9765226781
WWW.YouTube.com/BADSHAHimp
Subscribe My Channel

Answer: A.AD
A.AD
A.AD

9 भारतीय संविधानामध्ये नाही:

Indian Constitution does not have:

بھارتی آئین میں نہیں ہے

A.दुहेरी नागरीकत्व
A.Double Citizenship
A. ڈبل شہریت

B.प्रौढ मताधिकार
B.Adult Suffrage
B. بالغ متادکار

C.संसदीय
C.Parliamentary
C. پارلیمانی

D.गणतंत्र
D.Republic
D. جمہوریہ

Answer: A.दुहेरी नागरीकत्व
A.Double Citizenship
A. ڈبل شہریت

10 वर्गातील मुले एका रांगेत उभी राहिली. एक मुलगा दोन्ही बाजूनी एकोणिसाव्या स्थानावर आहे. तर वर्गात किती मुले आहेत ?

A class of boys stands in a single line. One boy is nineteenth in order from both the ends. How many boys are there in the class?

لڑکوں کی کلاس ایک ہی کتار میں کھڑے ہے. ایک لڑکا دونوں چھور سے نووا ہے. کلاس میں کتنے لڑکے ہے؟

A.27
A.27
A.27

For More Info And Videos About TAIT-Exam Syllabus And Other Exam Visit My Channel
TAIT च्या 30 प्रश्नपत्रिका PDF
BADSHAHimp Available Request 9765226781
WWW.YouTube.com/BADSHAHimp
Subscribe My Channel

B.37
B.37
B.37

C.38
C.38
C.38

D.39
D.39
D.39

Answer: B.37
B.37
B.37

11 सूचना: खालील प्रश्नांमध्ये दिलेल्या पर्यायांमधून संबंधित अक्षर/शब्द/संख्या निवडा.

निष्फळ : जीवन ::

DIRECTIONS: In the following question, select the related letter/word/number from the given alternatives.

Defunct : Life ::

سمت: مندرجہ ذیل سوال میں، دیے گئے متبادل سے متعلقہ حرف/لفظ/نمبر منتخب کریں۔

مردہ : زندگی ::

A.साचलेले : चलन
A.Stagnant : Motion
A.حرکت : بے حرکت

B.व्यवस्थित : आकृतिबंध
B.Orderly : Pattern
B.ترتیب وار : پیٹرن

C.रखरखीत : वाळवंट
C.Arid : Desert
C.بنجر زمین :ریگستان

D.स्थूल : वजन
D.Obese : Weight
D.فربہ : وزن

For More Info And Videos About TAIT-Exam Syllabus And Other Exam Visit My Channel
BADSHAHimp TAIT च्या 30 प्रश्नपत्रिका PDF Available Request 9765226781 WWW.YouTube.com/BADSHAHimp Subscribe My Channel

Answer: A.साचलेले : चलन
A.Stagnant : Motion
A.حرکت : بے حرکت

12 हे टक्केवारीत मांडा.
5/20

Express this into percentage?
5/20

5/20کو فیصد میں ظاہر کرینگے

A.25%

A.25%

A.25%

B.75%

B.75%

B.75%

C.15%

C.15%

C.15%

D.87%

D.87%

D.87%

Answer: A.25%

A.25%

A.25%

For More Info And Videos About TAIT-Exam Syllabus And Other Exam Visit My Channel
TAIT च्या 30 प्रश्नपत्रिका PDF
BADSHAHimp Available Request 9765226781
WWW.YouTube.com/BADSHAHimp
Subscribe My Channel

13

सूचना: दिलेल्या चारांपैकी वेगळी (असंबद्ध) असणारी आकृती शोधून काढा.

DIRECTIONS: From the odd from the given four figures.

ہدایات: دیئے گئے چار شکلوں میں سے طاق شکل کونسی ہے؟

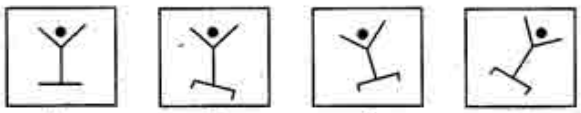

A. (A)

B. (B)

C. (C)

D. (D)

Answer: A. (A)

14

_____ आक्रमक वर्तनाचा एक प्रकार आहे.

_____ is a type of aggressive behaviour

_____ جارحیت زدہ رویے کی ایک قسم ہے:

A.तोंडी आक्रमकता
A.Verbal aggression
A.زبانی جارحیت

B.मित्रत्वापेक्षा
B.Over friendliness
B.ضرورت سے زیادہ دوستانہ ہونا

C.विरोधी आक्रमकता
C.Hostile aggression
C.مخالفانہ جارحیت

D. (a) आणि (c)
D.(a) & (c)
D.a اور c

Answer: D. (a) आणि (c)
D.(a) & (c)
D.a اور c

15

आयनॉन म्हणजे काय?

What is an anion?

انیین کیا ہے؟

A.सकारात्मक भारीत कण
A.Positively charged particle
A.مثبت طور پر چارج شدہ ذرہ

B.तटस्थ अणू
B.Neutral atom
B.نیوٹرل ایٹم

C.नकारात्मक भारीत कण
C.Negatively charged particle
C.منفی طور پر چارج شدہ ذرہ

D.उच्च भारीत कण
D.Highly charged particle
D.بہت زیادہ چارج شدہ ذرہ

Answer:

C.नकारात्मक भारीत कण
C.Negatively charged particle
C.منفی طور پر چارج شدہ ذرہ

16

एका विशिष्ट क्षेत्रामध्ये उल्लेखनिय क्षमता म्हणजे

A remarkable ability in one particular field is

کسی ایک خاص میدان میں غیر معمولی قابلیت ہے:

A.प्रतिभा
A.Talent
A. ٹیلینٹ

B.बौद्धिक श्रेष्ठत्व
B.Intellectual superiority
B.ذہنی تفوق

C.सर्वसामान्यापेक्षा थोडी जास्त बुद्धिमत्ता
C.Above average intelligence
C.اوسط سے اوپر ذہانت

D.सर्वसामान्यापेक्षा उच्च बुद्धिमत्ता
D.High average intelligence
D.اوسط سے بہت زیادہ ذہانت

Answer: A.प्रतिभा
A.Talent
A. ٹیلینٹ

17 जर 10 व्यक्ती एक काम 20 दिवसांमध्ये करू शकतात, तर दुप्पट कार्यक्षमता असलेले 20 व्यक्ती तेच काम किती दिवसांत करू शकतील?

If 10 persons can do a job in 20 days, then 20 persons with the twice efficiency can do the same job in:

آگے 10 لوگ ایک کام کو 20 دنوں میں کر سکتے ہیں, تو 20 لوگ دوگنی مہارت کے ساتھ اسی کام کو کتنے دنوں میں ختم کر سکتے ہیں؟

A.10
A.10
A.10

B.20
B.20
B.20

C.5
C.5
C.5

D.15
D.15
D.15

Answer: C.5
C.5
C.5

18 समजा आपणास एका आरक्षित वर्गाच्या निधीचे प्रभारी म्हणून नियुक्त केले आहे. अशा निधीचा किफायतशीर वापर व्हावा म्हणून आपण काय करणार?

Suppose you are appointed in charge of the fund meant for reserved classes. What will you do with such a lucrative fund at your disposal?

فرض کریں آپ کو ریزرو کلاس کے لئے معاوضہ فنڈ کا نگران مقرر کیا گیا ہے۔ اس طرح کے منافع بخش فنڈ کے ساتھ آپ کو کیا کرنا ہوگا؟

A.स्वताची आर्थिक मिळकत वाढवणार
A.Personal economic gain
A.ذاتی اقتصادی فائدہ

B.आरक्षित वर्गातील विद्यार्थ्यांचा योग्य प्रमाणात लाभ करणार
B.Give equitable advantage to the reserved class students
B.مخصوص کلاس کے طالب علموں کو مناسب فائدہ دے

C.प्राचार्यास आर्थिक मदत करणार
C.Provide economic assistance to the principal
C.پرنسپل کو اقتصادی مدد فراہم کریں

D.सामाजिक कल्याण अधिकाऱ्यासोबत स्वताचा पण फायदा करून घेणार
D.Take personal advantages for yourself along with social welfare officers.
D.سماجی فلاح و بہبود کے افسران کے ساتھ خود کے لئے ذاتی فوائد لینا.

Answer: B.आरक्षित वर्गातील विद्यार्थ्यांचा योग्य प्रमाणात लाभ करणार
B.Give equitable advantage to the reserved class students
B.مخصوص کلاس کے طالب علموں کو مناسب فائدہ دے

19 सूचना: दिलेल्या पर्यायांमधून वेगळे ते बाहेर काढा.

DIRECTIONS: Find the odd one out from the given alternatives.

سمت: دیے گئے متبادل میں سے بے جوڑ کو تلاش کرو۔

A.भारत रुपया
A.India Rupee
A.بھارتی روپیہ

B.अमेरिका: डॉलर
B.America: Dollar
B.امریکہ: ڈالر

C.कुवैत : दिनार
C.Quwait : Dinar
C.کویت : دینار

D.ऑस्ट्रेलिया : पौंड
D.Australia : Pound
D.آسٹریلیا : پاؤنڈ

Answer: D.ऑस्ट्रेलिया : पौंड
D.Australia : Pound
D.آسٹریلیا : پاؤنڈ

20 समांतरभुज चौकोनाचे दोन लगतचे कोन हे 4:5 गुणोत्तरामध्ये आहेत. लहान कोनाचे माप काढा.

Two adjacent angles of a parallelogram are in the ratio of 4:5. Find the measures of smaller angle.

متوازی الاضلاع کے دو ملحق زاویہ 4: 5 کے تناسب میں ہیں۔ چھوٹے زاویہ کے پیمائش کریں

A.80°
A.80°
A.80°

B.100°
B.100°
B.100°

C.60°
C.60°
C.60°

D.60°
D.60°
D.60°

Answer: A.80°
A.80°
A.80°

21 Out of the given options which best expresses the meaning of the given Proverb?
Look before you leap.

A.You shouldn't act without first considering the possible consequences or dangers

B.You should not think of results or consequences before doing any important work

C.You should close your eyes before jumping from a very high place

D.You should not be distracted by the sounds of horns at the time of crossing a busy street

Answer: A.You shouldn't act without first considering the possible consequences or dangers

22 सूचना: अर्थपूर्ण परिच्छेद निर्माण करण्यासाठी, खाली दिलेली (P), (Q) (R), (S) आणि (T) ही पाच वाक्ये योग्य अनुक्रमाने पुनर्रचना करा; त्यांनतर खालील प्रश्नांची उत्तर द्या.

P. "मला तहान भागवायची आहे." असा तो विचार करतो.
Q. विविध प्रकारे प्रयत्न करूनही तो द्राक्षांच्या घडाजवळ पोहचत नाही.
R. "ती आंबट आहेत याची मला खात्री आहे," असे म्हणत अखेर तो आपले प्रयत्न सोडून देते.
S. गरम उन्हाळ्यात एके दिवशी एक कोल्हा एका द्राक्षांच्या बागेत जातो आणि पिकलेल्या द्राक्षांचा घड लटकलेला पाहतो.
T. तो थोडे अंतर मागे जाते, मग पळत येऊन उडी मारतो, पण द्राक्षापर्यंत पोहचयाला उडी कमी पडते.

पुनर्रचना केल्यानंतर खालीलपैकी कोणते वाक्य पहिले असेल?

DIRECTION: Rearrange the following five sentences (P), (Q), (R), (S) and (T) in the proper sequence to form a meaningful paragraph; then answer the questions given below them.
P. It thinks: “Just what I need to quench my thirst.”
Q. It tries in different ways to reach the bunch of grapes, but in vain.
R. It finally gives up saying “I am sure they are sour anyway.”
S. On a hot summer day, a fox comes upon an orchard and sees a bunch of ripened grapes.
T. It moves back a few paces, runs, and jumps but falls short of reaching the grapes.

Which of the following should be the FIRST sentence after rearrangement?

ہدایات: ان پانچ جملوں (P)، (Q)، (R)، (S) اور (T) کو با معنی پیرا بنانے کے لئے دوبارہ ترتیب دیجئے، پھر نیچے دے گئے سوالوں کے جواب دیجئے

P. اسنے سونچا: " بلکل جو مجھے پیاس بجانے کے لئے چاہیے.
Q. اسنے انگور تک پہنچ نے کے کہی طریقے اختیار کے، مگر سارے ناکام.
R. "آخر کار اسنے یہ ارادہ چھوڈ دیا یہ کہکر" مجھے یکین ہے کہ یے ویسے بھی کھٹے ہے.
S. ایک گرمی کے دن، ایک لومڑی باغ میں آی اور انگور کہ گچھا دیکھا.
T. وو کچھ کدم پیچھے گی، دھوڈی ، اور چھلانگ لگائی لکی انگور تک نہی پہنچی.

دوبارہ ترییب دینے کے بعد کون سا جملہ پہلے ہونا چاہیے؟

A.S
A.S
A.S

B.P
B.P
B.P

C.Q
C.Q
C.Q

D.T
D.T
D.T

Answer: A.S
A.S
A.S

23 नियमित बहुभुजाचा आंतर कोन 140° आहे. तर त्याच्या बाजूंची संख्या:

Each interior angle of a regular polygon is 140°. The number of sides is:

باقاعدہ کثیر زاویہ کا ہر داخلی زاویہ 140°ہے۔ اطراف کی تعداد یہ ہے:

A.10
A.10
A.10

B.8
B.8
B.8

C.6
C.6
C.6

D.9
D.9
D.9

Answer: D.9
D.9
D.9

24 कसोटीमध्ये बळीची हॅट-ट्रीक घेणारा पहिला गोलंदाज कोण होता?

Who was the first Indian bowler to take a hat- trick of wicket in tests?

پہلے بھارتیہ گیندباز جنہوں نے ٹیسٹ میچ میں ہیٹ ٹرک لی :

A.कपिल देव
A.Kapil Dev
A.کپل دیو

B.भिषण सिंह बेदी
B.Bishen Singh Bedi
B.بشن سنگھ بیدی

C.अनिल कुंबळे
C.Anil Kumble
C.انیل کمبلے

D.हरभजन सिंघ
D.Harbhajan Singh
D.ہربھجن سنگھ

Answer: D.हरभजन सिंघ
D.Harbhajan Singh
D.ہربھجن سنگھ

25 सूचना : खालील प्रत्येक प्रश्नात दोन विधाने I आणि II दिलेले आहेत. हे विधान एकतर स्वतंत्र कारण असू शकतात किंवा स्वतंत्र कारणांचे परिणाम असू शकतात. यांपैकी एक विधान इतर विधानाचा परिणाम असू शकतो. दोन्ही विधाने वाचा आणि खालीलपैकी कोणत्या उत्तराचा पर्याय या दोन्ही विधानांमधील संबंधांचे वर्णन करतो ते ठरवा.

विधान :
I. बलात्कारांची संख्या वाढत आहे.
II. महिलांना अधिक स्वातंत्र्य मिळत आहेत.

DIRECTIONS: Below in each question are given two statements I and II. These statements may be either independent causes or may be effects of independent causes. One of these statements may be the effect of the other statement. Read both the statements and decide which of the following answer choice correctly depicts the relationship between these two statements.

Statements:
I. The number of rapes are increasing.
II. The women are gaining more freedom.

ہدایات: نیچے ہر سوال میں دو بیانات I اور II آزاد وجوہات یا پھر آزاد وجوہات کے اثرات ہو سکتے ہیں۔ انہیں گئے ہیں۔ یہ بیانات یا تو آ
بیانات میں سے ایک بیان دوسرے کا اثر ہو سکتا ہے۔دونوں بیانات پڑھیں اور فیصلہ کریں کہ نیچے دیے گئے کس جواب کا انتخاب ان
دونوں بیانات کے در میان تعلق کو ٹھیک سے ظاہر کرتا ہے۔

بیانات:
I – ریپ کی تعداد میں اضافہ ہو رہا ہے۔
II ۔ خواتین کو زیادہ آزادی مل رہی ہے۔

A.विधान I कारण आहे आणि विधान II त्याचा परिणाम आहे;
A.Statement I is the cause and statement II is its effect;
A.بیان نمبر I وجہ ہے اور بیان نمبر II اس کا اثر ہے۔

B.विधान II कारण आहे आणि विधान I त्याचा परिणाम आहे;
B.Statement II is the cause and statement I is its effect;
B.بیان نمبر II وجہ ہے اور بیان نمبر I اس کا اثر ہے۔

C.विधान I आणि II दोन्ही स्वतंत्र कारणे आहेत;
C.Both the statements I and II are independent causes;
C.دونوں بیانات نمبر I اور نمبر II آزاد وجوہات ہیں۔

D.विधान I आणि II दोन्ही स्वतंत्र कारणांचे परिणाम आहेत;
D.Both the statements I and II are effects of independent causes;
D.دونوں بیانات نمبر I اور نمبر II آزاد وجوہات کے اثرات ہیں۔

Answer: D.विधान I आणि II दोन्ही स्वतंत्र कारणांचे परिणाम आहेत;
D.Both the statements I and II are effects of independent causes;
D.دونوں بیانات نمبر I اور نمبر II آزاد وجوہات کے اثرات ہیں۔

26 मालिकेचा मध्यक काढा:
15, 20, 30

Find the median for the series:
15, 20, 30

دی ہوئی سیریز کا اوسط (میڈین) ہوگا
15, 20, 30

A.40
A.40
A.40

B.20
B.20
B.20

C.60
C.60
C.60

D.57
D.57
D.57

Answer: B.20
B.20
B.20

27 एक रेल्वे दुपारचे 12.15 वाजता पोहचणे अपेक्षित होते, मात्र ती 3 तास 15 मिनिटे उशिरा आली. तर ती रेल्वे किती वाजता पोहचली ?

A train was scheduled to reach at 12:15 pm but it was late by 3 hour 15 min. At what time did the train reach?

12:15 طے وقت کا پہنچنے کے ٹرین ایک pm؟ پہنچی وقت کس ٹرین۔ سے دیر منٹ 15 گھنٹے 3 وہ لیکن تھا

A.दुपारचे 14:30
A.14:30 pm
A.14:30 pm

B.दुपारचे 15:30
B.15:30 pm
B.15:30 pm

C.दुपारचे 16:30
C.16:30 pm
C.16:30 pm

D.दुपारचे 17:30
D.17:30 pm
D.17:30 pm

Answer: B.दुपारचे 15:30
B.15:30 pm
B.15:30 pm

28 DIRECTIONS: A sentence with an underlined word is given below. Find the Word which is most similar in meaning to the underlined word.
The diffident student never raised her hand in class, even when she knew the answer.

A.Timid

B.Confident

C.Gay

D.Optimistic

Answer: A.Timid

29	मॉडेम कश्याशी जोडलेला असतो? What is a modem connected to? موڈیم کس چیز سے جڑا ہوتا ہے؟
	A.प्रॉसेसर A.Processor A.پروسیسر
	B.मदर बोर्ड B.Mother board B.مدر بورڈ
	C.प्रिंटर C.Printer C.پرنٹر
	D.फोनची लाईन D.Phone line D.فون لائن
Answer:	D.फोनची लाईन D.Phone line D.فون لائن

30 सूचना: अर्थपूर्ण परिच्छेद निर्माण करण्यासाठी, खाली दिलेली (P), (Q) (R), (S) आणि (T) ही पाच वाक्ये योग्य अनुक्रमाने पुनर्रचना करा; त्यांनतर खालील प्रश्नांची उत्तर द्या.

P. "मला तहान भागवायची आहे." असा तो विचार करतो.
Q. विविध प्रकारे प्रयत्न करूनही तो द्राक्षांच्या घडाजवळ पोहचत नाही.
R. "ती आंबट आहेत याची मला खात्री आहे," असे म्हणत अखेर तो आपले प्रयत्न सोडून देते.
S. गरम उन्हाळ्यात एके दिवशी एक कोल्हा एका द्राक्षांच्या बागेत जातो आणि पिकलेल्या द्राक्षांचा घड लटकलेला पाहतो.
T. तो थोडे अंतर मागे जाते, मग पळत येऊन उडी मारतो, पण द्राक्षापर्यंत पोहचयाला उडी कमी पडते.

पुनर्रचना केल्यानंतर खालीलपैकी कोणते वाक्य तिसरे असेल?

DIRECTION: Rearrange the following five sentences (P), (Q), (R), (S) and (T) in the proper sequence to form a meaningful paragraph; then answer the questions given below them.
P. It thinks: “Just what I need to quench my thirst.”
Q. It tries in different ways to reach the bunch of grapes, but in vain.
R. It finally gives up saying “I am sure they are sour anyway.”
S. On a hot summer day, a fox comes upon an orchard and sees a bunch of ripened grapes.
T. It moves back a few paces, runs, and jumps but falls short of reaching the grapes.

Which of the following should be the THIRD sentence after rearrangement?

ہدایات: ان پانچ جملوں (P)، (Q)، (R)، (S) اور (T) کو با معنی پیرا بنانے کے لئے دوبارہ ترتیب دیجئے، پھر نیچے دے گئے سوالوں کے جواب دیجئے

P. اسنے سونچا: " بلکل جو مجھے پیاس بجانے کے لئے چاہیے.
Q. اسنے انگور تک پہنچ نے کے کہی طریقے اختیار کے، مگر سارے ناکام.
R. آخر کار اسنے یہ ارادہ چھوڈ دیا یہ کہکر" مجھے یکین ہے کہ یے ویسے بھی کھٹے ہے."
S. ایک گرمی کے دن، ایک لومڑی باغ میں آی اور انگور کہ گچھا دیکھا.
T. وو کچھ کدم پیچھے گی، دھوڈی ، اور چھلانگ لگائی لکی انگور تک نہی پہنچی.

دوبارہ ترییب دینے کے بعد کون سا جملہ تیسرا ہونا چاہیے؟

A.T
A.T
A.T

B.P
B.P
B.P

C.Q
C.Q
C.Q

D.R
D.R
D.R

Answer: A.T
A.T
A.T

31 DIRECTIONS: A sentence with an underlined phrasal verb is given below. Out of the four options, choose the one which can be substituted for the given phrasal Verb.
Her mother came across these old photos while she was cleaning her daughters room and started yelling at her.

A.fond unexpectedly

B.deleted

C.threw away

D.burnt

Answer: A.fond unexpectedly

32 Choose the word which is most similar in meaning to the given word.
SIGNIFICANT

A.Meaningful

B.Insignificant

C.Meaningless

D.Unimportant

Answer: A.Meaningful

33 **सूचना:** खालील प्रश्नात उत्तरातील पर्यायांपैकी कोणत्या पर्यायी आकृतीत प्रश्नातील आकृती अंतर्भूत आहे?

DIRECTIONS: In the given question find the answer figure in which question figure is embedded.

ہدایات: دیئے گئے سوال میں، جواب کی شکل کو دریافت کیجیئے جو سوال میں سرایت کر گئی ہے ۔

Question Figure:



Answer Figures:

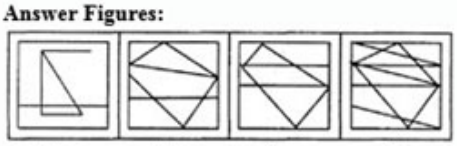

A. (A)

B. (B)

C. (C)

D. (D)

Answer: A. (A)

34

सरळ रूप द्या:
97800 – 73700 = ?

Simplify:
97800 – 73700 = ?

آسان بنائیں:
97800 – 73700= ?

A.24100
A.24100
A.24100

B.171500
B.171500
B.171500

C.17000
C.17000
C.17000

D.25000
D.25000
D.25000

Answer:

A.24100
A.24100
A.24100

35

R आणि S भाऊ आहेत, X ही Y ची बहीण आहे आणि X ची R आई आहे. S चे Y सोबत नाते काय?

R and S are brothers, X is the sister of Y and X is the mother of R. What is S to Y?

R اور S بھائی بھائی ہے، X Y کی بہن ہے اور X R کی ماں ہے. S Y کاکیا لگتی ہے؟

	A.पुतण्या A.Nephew A.بھانجا
	B.भाऊ B.Brother B.بھائی
	C.वडील C.Father C.باپ
	D.आई D.Mother D.ماں
Answer:	A.पुतण्या A.Nephew A.بھانجا

36	खालीलपैकी अशुद्ध शब्द कोणता ?
	A.डावखोरा
	B.डोइजड
	C.डुलकी
	D.डावपेच
Answer:	B.डोइजड

37 सूचना: हे प्रश्न खालील माहितीवर आधारित आहेत.
A, B, C, D, E, F, G, आणि H या आठ व्यक्तींपैकी प्रत्येकी एका वेगळ्या मजल्यांवर राहतो जिथे तळ मजल्याचा क्रमांक 1 आहे आणि तळ मजल्याच्या वरच्या मजल्याचा क्रमांक 2 आहे बाकी त्याचप्रमाणे आहेत आणि प्रत्येक व्यक्ती वेगळ्या उंचीची आहे परंतु त्याच क्रमाने असेल असे नाही.
फक्त तीन व्यक्ती D आणि F च्या मध्ये राहतात परंतु त्यातील दोघेही सम क्रमांकित मजल्यांवर राहत नाहीत. G पेक्षा उंच असलेल्या व्यक्तींची संख्या B पेक्षा ठेंगणे असलेल्या व्यक्तींच्या संख्ये इतकी आहे. B किंवा G दोन्हीपैकी कोणीही तिसरी सर्वात उंच किंवा सर्वात ठेंगणा व्यक्ती नाही. ते त्यांच्या उंचाच्या चढत्या क्रमवारीनुसार राहतात ज्याचा अर्थ आहे, सर्वात ठेंगणा व्यक्ती 1 क्रमांकित मजल्यावर राहतो आणि दुसरा ठेंगणा व्यक्ती मजला क्रमांकित 2 वर राहतो आणि याप्रमाणे बाकी. H हा E पेक्षा उंच आहे आणि B च्या तीन मजले खाली राहतो. A हा B पेक्षा ठेंगणा आहे परंतु D च्या बाजूला रहात नाही.
तिसरा सर्वांत ठेंगणा व्यक्ती कोण आहे?

DIRECTIONS: These questions are based on the following information.
Each one of eight persons A, B, C, D, E, F, G, and H – lives on a different floor of which the ground floor is numbered 1 and the floor above the ground floor is numbered 2 and so on and each one is of different height but not necessarily in the same order.
Only three persons live between D and F but neither of them lives on the even-numbered floor. The number of persons taller than G is equal to the number of persons shorter than B. Neither B nor G is either the third tallest or the shortest person. They live according to the ascending order of their heights which means the shortest person lives on the floor numbered 1 and the second shortest person lives on the floor numbered 2 and so on. H is taller than E and lives three floors below B. A is shorter than B but does not live adjacent to D.
Who is the third shortest person among all?

ہدایات: یہ سوالات مندرجہ ذیل معلومات پر مبنی ہیں۔
آٹھ افراد A، B، C، D، E، F، G اور H میں سے ہر ایک مختلف فلور پر رہتا ہے جس کے گراؤنڈ فلور کا نمبر 1 ہے اور گراؤنڈ سے اوپر کے فلور کا نمبر 2 اور اسی طرح آگے ہے اور ہر ایک کی اونچائی مختلف ہے لیکن اس کی ترتیب لازمی طور پر یکساں نہیں ہے۔
D اور F کے درمیان صرف تین لوگ رہتے ہیں لیکن ان میں سے کوئی بھی جفت عدد کے فلور پر نہیں رہتا ہے۔ G سے لمبے لوگوں کی تعداد B سے چھوٹے لوگوں کی تعداد کے برابر ہے۔ نہ تو B اور نہ ہی G سب سے لمبا یا سب سے چھوٹا ہے۔ وہ اپنی اونچائیوں کی صعودی ترتیب کے مطابق رہتے ہیں جس کا مطلب ہے سب سے چھوٹا شخص 1 نمبر کے فلور پر رہتا ہے اور دوسرا سب سے چھوٹا شخص 2 نمبر کے فلور پر رہتا ہے اور اسی طرح آگے۔ B سے لمبا ہے اور H، E سے تین فلور نیچے رہتا ہے۔ A، B سے کے قریب میں نہیں رہتا ہے۔ D چھوٹا ہے لیکن
سب میں تیسرا سب سے چھوٹا شخص کون ہے؟

A.G
A.G
A.G

B.E
B.E
B.E

C.C
C.C
C.C

D.A
D.A
D.A

Answer: B.E
B.E
B.E

38 कधीकधी आपण खालील हेतूंसाठी संसाधन म्हणून आपल्या विद्यार्थ्यांना वापरता-

Sometimes you apply your students as an instrument for the following purpose—

بعض اوقات آپ اپنے طلبا کو مندرجہ ذیل مقصد کے لئے ایک آلہ کے طور پر استعمال کرتے ہیں-

A.सहकार्याशी संवाद साधण्यासाठी
A.For spying of colleagues
A.ساتھیوں کی جاسوسی کے لئے

B.प्रतिस्पर्धीची मस्करी करण्यासाठी
B.For diluting the rivalries
B.حریفوں کو کمزور کرنے کے لئے

C.निष्ठावंत नेतृत्व निर्माण करण्यासाठी
C.For making autocratic leadership
C.خود مختار قیادت بنانے کے لئے

D.उच्च आदर्श ठेवण्यासाठी सामाजिकदृष्ट्या उपयुक्त असणाऱ्या कामासाठी
D.For high ideals of socially useful works.
D.سماجی طور پر مفید کاموں کے اعلی نظریات کے لئے.

Answer: D.उच्च आदर्श ठेवण्यासाठी सामाजिकदृष्ट्या उपयुक्त असणाऱ्या कामासाठी
D.For high ideals of socially useful works.
D.سماجی طور پر مفید کاموں کے اعلی نظریات کے لئے.

39 जर a:b=2:1 आणि b:c= 6:9 असेल. तर a:b:c शोधा.

If a:b=2:1 and b:c is 6:9. Find a: b:c?

اگر a:b=2:1 اور b:c تو 6:9 ہے a: b:c معلوم کریں؟

A.4:2:3
A.4:2:3
A.4:2:3

B.5:9:6
B.5:9:6
B.5:9:6

C.4:6:9
C.4:6:9
C.4:6:9

D.4:2:9
D.4:2:9
D.4:2:9

Answer: A.4:2:3
A.4:2:3
A.4:2:3

40 सूचना: दिलेल्या पर्यायांमधून वेगळे ते बाहेर काढा.

DIRECTIONS: Find the odd one out from the given alternatives.

سمت: دیے گئے متبادل میں سے بے جوڑ کو تلاش کرو۔

A.DFIMR
A.DFIMR
A.DFIMR

B.SBDZA
B.SBDZA
B.SBDZA

C.BDGKP
C.BDGKP
C.BDGKP

D.JLOSX
D.JLOSX
D.JLOSX

Answer: B.SBDZA
B.SBDZA
B.SBDZA

41 $x^2 – 1200 = 244$ या वर्गसमीकरणाची मुळे आहेत:

The roots of the quadratic equation $x^2 – 1200 = 244$ are:

مربع مساوات کے روٹ $x^2 – 1200 = 244$ ہیں:

	A.+38,-38 A.+38,-38 A.+38,-38
	B.-38, -38 B.-38, -38 B.-38, -38
	C.+38, +38 C.+38, +38 C.+38, +38
	D.+32,-32 D.+32,-32 D.+32,-32
Answer:	A.+38,-38 A.+38,-38 A.+38,-38

42	Choose the word which is opposite in meaning to the given word. NADIR
	A.Zenith
	B.Bottom
	C.Below
	D.Underneath
Answer:	A.Zenith

43	खालीलपैकी सर्वांत मोठा अपूर्णांक शोधा Find the largest of the following fractions مندرجہ ذیل کسور میں سے سب سے بڑی کسر تلاش کریں
	A.14/16 A.14/16 A.14/16

B.18/19
B.18/19
B.18/19

C.12/17
C.12/17
C.12/17

D.13/15
D.13/15
D.13/15

Answer: B.18/19
B.18/19
B.18/19

44 निर्जलतेमध्ये शरीरातील कोणता पदार्थ गमावला जातो?

During dehydration what is the substance that is usually lost by the body?

جسم میں پانی کی کمی کے دوران عام طور پر جسم میں کس چیز کا فقدان ہو جاتا ہے؟

A.शर्करा
A.Sugar
A.سوگر

B.कॅल्शियम फॉस्फेट
B.Calcium phosphate
B.کیلشیم فوسفیٹ

C.सोडियम क्लोराइड
C.Sodium chloride
C.سوڈیم کلورائڈ

D.पोटॅशियम क्लोराईड
D.Potassium chloride
D.پوٹیشیم کلورائڈ

Answer: C.सोडियम क्लोराइड
C.Sodium chloride
C.سوڈیم کلورائڈ

45 जेव्हा विद्यार्थी जसे कि खडू फेकून, तुमच्यावर शिट्टी वाजवून,तुमच्या बद्दल वाईट व अश्लील बोलून, अशा असंख्य चुकीच्या गोष्टी करून जर जाणूनबुजून वर्गाची शिस्त बिघडवण्याचा प्रयत्न करत असतील, तर त्या वर्गात तुमची भूमिका काय असेल?

When students are deliberately attempting to disturb the discipline of the class by making numerous mischiefs like throwing of chalks, whistling upon you, calling foul and obscene words, then what will be your role in that class?

جب طالب علم جان بوجھ کر کلاس کا نظم و ضبط خراب کرنےکی کوشش کررہے ہیں تو بہت سے فسادات جیسے چاکوں کو پھینکنے، آپ پر سیٹی بجاتے ہوئے، غلط اور فحش الفاظ بولتے ہیں، اس کلاس میں آپ کا کیا کردار ہوگا؟

A.काही विद्यार्थ्यांशी मैत्री करणार व त्यांच्या मदतीने गुंड प्रवृत्ती असलेल्या विद्यार्थ्यांची फजिती करणार
A.Be friendly with a few students and with their help crackdown the goonda elements
A.چند طالب علموں کے ساتھ دوستانہ رویہ رکھو اور ان کی مدد کے ساتھ غنڈا عناصر کو ختم کرو

B.शिक्षक म्हणून त्यांना आता पर्यंत न वापरलेली नैतिक शक्ती दाखवणार
B.Showing them your invisible moral powers as a teacher
B.استاد کے طور پر ان کو اپنے پوشیدہ اخلاقی قوتیں دکھانا

C.काही विद्यार्थ्यांना तर अप्रत्यक्ष धमकी देण्यास सांगणार
C.Expelling few students to give then an indirect threat
C.کچھ غیر طالب علموں کو خارج کرکے انہیں بلواسطہ دھمکی دینا

D.त्यांची अशी विचित्र वागणूक संपूर्ण वर्गाच्या कामगिरीला नुकसान करत आहे हे होतकरू विद्यार्थ्यांच्या लक्षात आणून देण्यास आवश्यक ते प्रयत्न करणार
D.Doing favorable efforts to make the troublesome students realize the harm they are inflicting upon the overall decorum off the class.
D. مصیبت طلباء کو بنانے کے لئے سازگار کوششیں کرتے ہوئے نقصان کو احساس کرتے ہیں کہ وہ طبقے سے مجموعی طور پر سجاوٹ پر اثر انداز کر رہے ہیں.

Answer: D.त्यांची अशी विचित्र वागणूक संपूर्ण वर्गाच्या कामगिरीला नुकसान करत आहे हे होतकरू विद्यार्थ्यांच्या लक्षात आणून देण्यास आवश्यक ते प्रयत्न करणार
D.Doing favorable efforts to make the troublesome students realize the harm they are inflicting upon the overall decorum off the class.
D. مصیبت طلباء کو بنانے کے لئے سازگار کوششیں کرتے ہوئے نقصان کو احساس کرتے ہیں کہ وہ طبقے سے مجموعی طور پر سجاوٹ پر اثر انداز کر رہے ہیں.

46 3.5 वर्षांसाठी $4\frac{1}{2}$% प्रति वर्ष या दराने किती रक्कम कर्जाऊ दिल्यास ती 3.75% प्रति वर्ष दराने 2.5 वर्षांमध्ये रू. 630 एवढी रक्कम निर्माण करेल?

What sum lent at $4\frac{1}{2}$% per annum will produce as much simple interest in 3.5 years as Rs.630 lent at 3.75% per annum in Rs.2.5 years?

کتنا مبلغ $4\frac{1}{2}$٪ سالانہ کی درسے دیا گیا قرض 3.5 سال میں اتنا سود مفرد بناتا ہے جتنا 530 روپے 2.5 سال کے لئے 3.75٪ کی درسے دیا گیا قرض؟

A. रू. 375
Rs. 375
375 روپیہ

	B. रू. 385 Rs. 385 385 روپیہ
	C. रू. 390 Rs.390 390 روپیہ
	D. रू. 405 Rs.405 405 روپیہ
Answer:	A. रू. 375 Rs. 375 375 روپیہ

47 सूचना: खालील दिलेल्या प्रश्नामध्ये काही विधाने आणि काही निष्कर्ष आहेत. सामन्यात: ज्ञात तथ्यांपेक्षा ते वेगळे असतील तर दिलेली विधाने तुम्हाला सत्य मानवी लागतील आणि त्यानंतर दिलेल्या विधानाचे अनुकरण दिलेल्यापैकी कोणता निष्कर्ष तार्किकदृष्ट्या करतो ते ठरवा.

विधाने:
A ≥ B = C; B < D ≤ E
निष्कर्ष:
I. D > A
II. E > C

DIRECTIONS: In the question given below, there are few statements followed by few conclusions. You have to take the given statements to be true even if they seem to be at variance with commonly known facts and then decide which of the given conclusion logically follow(s) from the given statements.

Statements:
A ≥ B = C; B < D ≤ E
Conclusions:
I. D > A
II. E > C

ہدایات: مندرجہ ذیل سوال میں، کچھ بیانات کے بعد کچھ نتائج موجود ہیں. اگر آپ کو عام طور پر جانے جاتے حقائق کے ساتھ بھی متغیر ہونے لگے تو بھی آپ دئے گئے بیانات دماغ میں رکھیں اور پھر اس بات کا فیصلہ کریں کہ ذیل میں دیا گیا کونسا نتیجہ منطقانہ طور پر دیے گئے بیانات کی پیروی کرتا ہے.

بیانات:
A ≥ B = C; B < D ≤ E
نتائج:
I. D > A
II. E > C

A.तर फक्त I निष्कर्ष खरा आहे
A.If only conclusion I is true
A.اگر صرف I نتیجہ درست ہے

B.तर फक्त II निष्कर्ष खरा आहे
B.If only conclusion II is true
B.اگر صرف نتیجہ II درست ہے

C.तर I किंवा II यापैकी एक निष्कर्ष खरा आहे
C.If either conclusion I or II is true
C.اگر I اور II نتائج میں سے ایک درست ہے

D.तर I व II हे दोन्हीही निष्कर्ष खरे नाहीत
D.If neither conclusion I nor II is true
D.اگر I اور II نتائج میں سے کوئی بھی درست نہیں

Answer: B.तर फक्त II निष्कर्ष खरा आहे
B.If only conclusion II is true
B.اگر صرف نتیجہ II درست ہے

48

सूचना: खालील प्रश्नात उत्तरातील पर्यायांपैकी कोणत्या पर्यायी आकृतीत प्रश्नातील आकृती अंतर्भूत आहे?

DIRECTIONS: In the given question find the answer figure in which question

ہدایات: دیئے گئے سوال میں جواب والی شکل دریافت کیجیئے جس میں سوال والی شکل سرایت کرگئی ہے۔

Problem Figure:



Answer Figures:

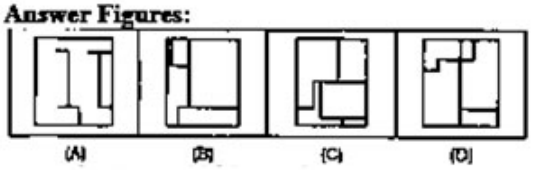

A. (A)

B. (B)

C. (C)

D. (D)

Answer: C. (C)

49

समभारांमध्ये समान काय आहे?

What do isobars have in common?

آئسوبار میں کونسی چیز عام ہوتی ہے؟

A.इलेक्ट्रॉनची संख्या
A.Number of electrons
A.الیکٹرون کی تعداد

B.अणू वस्तूमान
B.Atomic mass
B.اٹومک ماس

C.अणू संख्या
C.Atomic number
C.اٹومک نمبر

D.न्यूट्रॉनची संख्या
D.Number of neutrons
D.نیوٹرون کی تعداد

Answer:

B.अणू वस्तूमान
B.Atomic mass
B.اٹومک ماس

50

सूचना: हे प्रश्न खालील माहितीवर आधारित आहेत.
A, B, C, D, E, F, G, आणि H या आठ व्यक्तींपैकी प्रत्येकी एका वेगळ्या मजल्यांवर राहतो जिथे तळ मजल्याचा क्रमांक 1 आहे आणि तळ मजल्याच्या वरच्या मजल्याचा क्रमांक 2 आहे बाकी त्याचप्रमाणे आहेत आणि प्रत्येक व्यक्ती वेगळ्या उंचीची आहे परंतु त्याच क्रमाने असेल असे नाही.
फक्त तीन व्यक्ती D आणि F च्या मध्ये राहतात परंतु त्यातील दोघेही सम क्रमांकित मजल्यांवर राहत नाहीत. G पेक्षा उंच असलेल्या व्यक्तींची संख्या B पेक्षा ठेंगणे असलेल्या व्यक्तींच्या संख्ये इतकी आहे. B किंवा G दोन्हीपैकी कोणीही तिसरी सर्वात उंच किंवा सर्वात ठेंगणा व्यक्ती नाही. ते त्यांच्या उंचाच्या चढत्या क्रमवारीनुसार राहतात ज्याचा अर्थ आहे, सर्वात ठेंगणा व्यक्ती 1 क्रमांकित मजल्यावर राहतो आणि दुसरा ठेंगणा व्यक्ती मजला क्रमांकित 2 वर राहतो आणि याप्रमाणे बाकी. H हा E पेक्षा उंच आहे आणि B च्या तीन मजले खाली राहतो. A हा B पेक्षा ठेंगणा आहे परंतु D च्या बाजूला रहात नाही.
खालीलपैकी कोणते विधान निश्चितपणे सत्य आहे?

DIRECTIONS: These questions are based on the following information.
Each one of eight persons A, B, C, D, E, F, G, and H – lives on a different floor of which the ground floor is numbered 1 and the floor above the ground floor is numbered 2 and so on and each one is of different height but not necessarily in the same order.
Only three persons live between D and F but neither of them lives on the even-numbered floor. The number of persons taller than G is equal to the number of persons shorter than B. Neither B nor G is either the third tallest or the shortest person. They live according to the ascending order of their heights which means the shortest person lives on the floor numbered 1 and the second shortest person lives on the floor numbered 2 and so on. H is taller than E and lives three floors below B. A is shorter than B but does not live adjacent to D.
Which of the following statements is definitely true?

ہدایات: یہ سوالات مندرجہ ذیل معلومات پر مبنی ہیں۔
آٹھ افراد A، B، C، D، E، F، G اور H میں سے ہر ایک مختلف فلور پر رہتا ہے جس کے گراؤنڈ فلور کا نمبر 1 ہے اور گراؤنڈ سے اوپر کے فلور کا نمبر 2 اور اسی طرح آگے ہے اور ہر ایک کی اونچائی مختلف ہے لیکن اس کی ترتیب لازمی طور پر یکساں نہیں ہے۔
D اور F کے درمیان صرف تین لوگ رہتے ہیں لیکن ان میں سے کوئی بھی جفت عدد کے فلور پر نہیں رہتا ہے۔ F سے لمبے لوگوں G کی تعداد یا تو تیسرا سب سے لمبا یا سب سے چھوٹا ہے۔ وہ اپنی G نہ ہی B سے چھوٹے لوگوں کی تعداد کے برابر ہے۔ نہ تو B اونچائیوں کی صعودی ترتیب کے مطابق رہتے ہیں جس کا مطلب ہے سب سے چھوٹا شخص 1 نمبر کے فلور پر رہتا ہے اور دوسرا سب سے چھوٹا شخص 2 نمبر کے فلور پر رہتا ہے اور اسی طرح آگے۔ A، B سے تین فلور نیچے رہتا ہے۔ B سے لمبا ہے اور H، E کے قریب میں نہیں رہتا ہے۔ D چھوٹا ہے لیکن
مندرجہ ذیل بیانات میں سے کون یقینی طور پر درست ہے؟

A.H हा सर्वात उंच व्यक्ती आहे
A.H is the tallest person
A.سب سے لمبا شخص ہے

B.A हा दुसरा सर्वात ठेंगणा व्यक्ती आहे
B.A is the second shortest person
B.A دوسرا سب سے چھوٹا شخص ہے

C.H पाचव्या मजल्यावर राहतो
C.H lives on the fifth floor
C.H پانچویں فلور پر رہتا ہے

D.यांपैकी कोणतीही नाही
D.None of these
D.ان میں سے کوئی نہیں

Answer: D.यांपैकी कोणतीही नाही
D.None of these
D.ان میں سے کوئی نہیں

51 अनिलने 15 मी. दक्षिणेकडे चालण्यास सुरुवात करतो. आता तो उत्तरेकडे वळला आणि 20 मी. चालत गेला, नंतर पूर्वेकडे वळला आणि 10 मी. चालला. शेवटी तो दक्षिणेकडे वळतो आणि 5 मी. चालतो. आता तो आपल्या मूळ ठिकाणापासून कोणत्या दिशेस चालत आहे?

Anil starts walking 15 m towards South. Now he turned North and walked for 20 m, then towards East and walked 10 m. Finally he turns towards South and walked 5 m. In which direction is he now from original position?

انیل نے جنوب کی سمت میں 15 میٹر چلنا شروع کرتا ہے- اب وہ شمال کی جانب مڑتا ہے اور 20 میٹر تک چلتا ہے، پھر بعد میں مشرق کی جانب10 میٹر چلتا ہے- بالآخر وہ جنوب کی سمت میں مڑتا ہے اور5 میٹر چلتا ہے-اپنی اصل حالت سے اب وہ کس سمت میں چل رہا ہے؟

A.उत्तर
A.North
A.شمال

B.दक्षिण
B.South
B.جنوبی

C.पूर्व
C.East
C.مشرق

D.पश्चिम
D.West
D.مغرب

Answer: C.पूर्व
C.East
C.مشرق

52 DIRECTIONS: A sentence with an underlined word is given below. Find the word which is opposite in meaning to the underlined word from the given options.
I despise such ignorance.

A.Admire

B.Hate

C.Detest

D.Dislike

Answer: A.Admire

53 ज्या संख्येने $7^{2n} - 3^{2n}$ ही पदावले नेहमी अचूकपणे विभाज्य असेल अशी सर्वांत मोठी संख्या शोधा.

Find the greatest number by which the expression $7^{2n} - 3^{2n}$ is always exactly divisible:

7^{2} سب سے بڑا عدد معلوم کریں جس سے مساوات $^{n} - 3^{2n}$ ہمیشہ ابل تقسیم ہو:

A.4
A.4
A.4

B.10
B.10
B.10

C.20
C.20
C.20

D.40
D.40
D.40

Answer: D.40
D.40
D.40

54	गहाळ संख्या शोधा. Find the missing number. .گمنام نمبر کھوجے ، 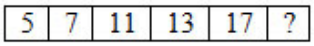
	A. 21
	B. 24
	C. 15
	D. 19
Answer:	D. 19

55	निर्देश: मालिका पूर्ण करा CA, ?, JF, OJ DIRECTION: Complete the series CA, ?, JF, OJ ہدایت اس سرج کو مکمّل کرو CA, ?, JF, OJ
	A.DC A.DC A.DC
	B.FC B.FC B.FC
	C.GC C.GC C.GC
	D.HC D.HC D.HC
Answer:	B.FC B.FC B.FC

56	186 × ? ÷ 14=1302 186 × ? ÷ 14=1302 186 × ? ÷ 14=1302
	A.98 A.98 A.98
	B.92 B.92 B.92
	C.88 C.88 C.88
	D.84 D.84 D.84
Answer:	A.98 A.98 A.98

57	खालीलपैकी अशुद्ध वाक्य कोणते ?
	A.भिकू मामाने कधी संसार थाटला नाही.
	B.अभिषेक उशीला टेकून बसला होता.
	C.लग्नामुळे मामांची खूप धावपळ झाली.
	D.कामामुळे ते पावसातसुद्धा फिरून असत.
Answer:	D.कामामुळे ते पावसातसुद्धा फिरून असत.

58 पृथ्वीच्या पृष्ठाच्या वर असलेला ओझोन थर कश्यापासून वाचवण्यासाठी ढालीचे काम करतो-

Ozone layer above the surface of Earth provides a shield against-

زمین کی سطح کے اوپر اوزون پرت ڈھال فراہم کرتا ہے

A.क्ष- किरणे
A.X-rays
A. ایکس رے سے

B.अल्ट्रा-वायलेट किरणे
B.Ultra-violet rays
B. الٹرا وائلٹ شعاعوں سے

C.गामा किरणे
C.Gamma rays
C. گاما کرنوں سے

D.इन्फ्रा-रेड किरणे
D.Infra-red rays
D. انفرا ریڈ کرنوں سے

Answer: B.अल्ट्रा-वायलेट किरणे
B.Ultra-violet rays
B. الٹرا وائلٹ شعاعوں سے

59 समजा एखाद्या किशोरवयीन विद्यार्थ्याने आपल्यावर कठोर व अपमानजनक वागणुकी बद्दल तक्रार केली आहे. त्याच्या पालकांनी रागाच्या भरात आपल्याशी संपर्क साधला असता तेव्हा तुमची प्रतीक्रिया काय असेल?

Suppose an adolescent makes a complaint of your harsh and insulting behavior. His parents contact you in anger then how could you react to them?

فرض کریں کہ ایک نوجوان آپ کے سخت اور بے عزتی والے رویے کی شکایت کرتا ہے۔ اس کے والدین آپ سے غصے میں رابطہ کرتے ہیں تو آپ ان کے ساتھ کیسے ردعمل کرسکتے ہیں؟

A.तुम्ही त्यांना प्राचार्याकडे घेऊन जाणार व त्यांच्या उद्धट वर्तणूकीच्यामुळे त्यांची तक्रार करणार
A.You will take them to the principal and make a complaint against their rude behavior
A.آپ انہیں پرنسپل کے پاس لے جائیں گے اور ان کے سخت سلوک کے خلاف شکایت کریں گے

B.आपण त्या विद्यार्थी विरुद्ध दडपशाहीने युद्ध सुरु करणार
B.You will launch a war of repression against the student
B.آپ طالب علم کے خلاف ظلم کی جنگ شروع کریں گے

C.भविष्यात अशा घटना टाळण्यासाठी आपण आपल्या स्वभावात बदल घडवून आणनार
C.You will desirably change your attitude to avoid such incident in future
C.مستقبل میں ایسے واقعے سے بچنے کے لئے آپ کو اپنا رویہ تبدیل کرنا پڑے گا

D.तुम्ही त्या विद्यार्थ्याकडे दुर्लक्ष कराल.
D.You will neglect the student.
D.آپ طالب علم کو نظر انداز کریں گے.

Answer: C.भविष्यात अशा घटना टाळण्यासाठी आपण आपल्या स्वभावात बदल घडवून आणनार
C.You will desirably change your attitude to avoid such incident in future
C.مستقبل میں ایسے واقعے سے بچنے کے لئے آپ کو اپنا رویہ تبدیل کرنا پڑے گا

60 "दि टर्बुलेंट ईयर्स" याचे लेखक _____ आहेत

The author of “The Turbulent Years” is -

دی ٹربیولینٹ یٹرس کے مصنف ہیں :

A.अमिताव घोष
A.Amitav Ghosh
A.امیتوگھوش

B.अरूण शौरी
B.Arun Shourie
B.ارون شوری

C.प्रणब मुखर्जी
C.Pranab Mukherjee
C. پرنب مکھرجی

D.यशवंत सिन्हा
D.Yashwant Sinha
D.یشونت سنھا

Answer: C.प्रणब मुखर्जी
C.Pranab Mukherjee
C. پرنب مکھرجی

61 जर $3^a = 729$ आणि $2^b = 1024$, $\frac{4a+6b}{6b-3a}$ चे मूल्य काढा:

If $3^a = 729$ and $2^b = 1024$, then find the value of $\frac{4a+6b}{6b-3a}$:

اگر $3^a = 729$ اور $2^b = 1024$ تو $\frac{4a+6b}{6b-3a}$ کی قیمت معلوم کریں:

A. 7/3

B. 5

C. 2

D. 3

Answer: C. 2

62 सूचना: दोन विधाने आणि त्यानंतर दोन निष्कर्ष, I आणि II दिले आहेत. ही विधाने सामान्यतः ज्ञात वस्तुस्थितीपेक्षा भिन्न असली तरी सत्य आहेत असे समजा. दिलेल्यापैकी कोणता निष्कर्ष दिलेल्या विधानांवरुन नक्की काढता येऊ शकतो हे तुम्ही ठरवायचे आहे.तुमचे उत्तर सूचित करा.
विधाने:
कुत्र्यांना चार पाय असतात.
टेबल्सचे चार पाय असतात
निष्कर्ष:
I. टेबल्स ही कुत्री आहेत.
II. कुत्री ही टेबल्स आहेत

DIRECTION: Two statements are given following by two conclusions, I, and II. You have to consider that statements to be true, even if they seem to be at variance from commonly known facts. You are to decide which of the given conclusions can definitely be drawn from the given statements. Indicate your answer.

Statements:
Dogs have four legs.
Tables have four legs.

Conclusion:
I. Tables are dogs.
II. Dogs are tables.

ہدایات: دو سٹیٹمنٹ جوکہ دو خلاصوں پر مشتمل ہیں .I اور II. اپ کو وہ سٹیٹمنٹ درست ماننا ہے، اگرچہ دکہنے میں وہ بہت سارے حقاٰق ست مطبقت رکہتی ہو۔ اپ کو دیے گے خلاصوں میں سے یقینی طور پر اسے اختیار کرنا ہے جو سٹیٹمنٹ سے نکلا ہو. اپنا جواب تلاش کرے.

اظہار بیان:
کتوں کی چار ٹانگے ہوتی ہے.
ٹیبل کی چار ٹانگے ہوتی ہے
نتائج:
I. ٹیبل کتے ہوتے ہے.
II. کتے ٹیبل ہوتے ہے.

A.केवळ I निष्कर्ष निघेल
A.Only I follows
A.خالی I تعاقب کرتا ہے

B.केवळ II निष्कर्ष निघेल
B.Only II follows
B.خالی II تعاقب کرتا ہے

C.एकतर I किंवा II निष्कर्ष निघेल
C.Either I or II follows
C.یا I یا II تعاقب کرتا ہے

D.I किंवा II निष्कर्षी निघणार नाही
D.Neither I nor II follows
D. نہ I نہ II تعاقب کرتا ہے

Answer: D.I किंवा II निष्कर्षी निघणार नाही
D.Neither I nor II follows
D. نہ I نہ II تعاقب کرتا ہے

63 जर ,12 = 4 @ 6 * 18 ,6 = 3 @ 2 * 4 तर 7 @ 3 * 24 चे काय मूल्य असेल?

If 4 * 2 @ 3 = 6, 18 * 6 @ 4 = 12, then what will be the value of 24 * 3 @ 7?

اگر 2 * 4 @ 3 = 6، 18 * 6 @ 4 = 12، تو 3 * 24 @ 7؟ کی ویلیو کیا ہوگی

A. 21

B. 27

C. 72

D. 56

Answer: D. 56

64 _____ हे नैराश्येचे लक्षण असू शकते

____ can be a sign of depression

____ ڈپریشن کی علامت ہوسکتی ہے

A.निराशावाद
A.Pessimism
A.مایوس

B.विसराळूपणा
B.Forgetfulness
B.بھول

C.हर्षातिरेक
C.Euphoria
C.بشاشت

D.यांपैकी कोणतीही नाही
D.None of these
D.ان میں سے کوئی نہیں

Answer:

A.निराशावाद
A.Pessimism
A.مایوس

65

विधान:
एका स्थानिक गृहनिर्माण संस्थेचे अध्यक्ष या नात्याने मूव्ही थिएटरमध्ये आपल्या समाजातील एक मुलगा पकडला. मुलगा शेजारच्या सोसायटीच्या एका मुलीबरोबर चित्रपट बघत होता.

कृतीचा कोर्स:
I. सिनेमा मालकाने तिकिटे विकल्याबद्दल कठोर कारवाई केली पाहिजे.
II. मुलावर आणि मुलीवर कठोर कारवाई करावी जेणे करून भविष्यात समस्या पुन्हा पुनरावृत्ती होणार नाही.

Statement:
President of a local housing society caught a boy of their society in the movie theatre. The boy was watching movie with a girl from neighbouring society.
Course of actions:
I. Strict action should be taken against the cinema owner who sold them tickets.
II. Strict action should be taken against the boy and the girl so that the problem will not get repeated in the future

بیان:
لوکل سوسائٹی کے صدر نے اپنی سوسائٹی کے ایک لڑکے کو سینما میں پکڑ لیا۔ لڑکا پڑوسی سوسائٹی کی ایک لڑکی کے ساتھ فلم دیکھ رہا تھا۔

لائحہ عمل:
I۔سینما کے مالک کے خلاف سخت کاروائی کی جانی چاہیے جس نے انہیں ٹکٹ فروخت کیے۔
II۔ لڑکے اور لڑکی کے خلاف سخت کاروائی کی جانی چاہیے۔ تاکہ آئندہ یہ مسئلہ پیدا نہ ہو۔

A.फक्त I अनुसरून आहे
A.Only I follows
A. صرف I لاگو ہو گا۔

B.फक्त II अनुसरण करते आहे
B.Only II follows
B. صرف II لاگو ہو گا۔

C.एकतर I किंवा II अनुसरून आहे
C.Either I or II follows
C.(c) I یا II میں سے ایک لاگو ہو گا۔

D.I किंवा II दोन्हीपैकी काहीही अनुसरण करत नाही
D.Neither I nor II follows
D. I اور II میں سے کوئی بھی لاگو نہیں ہو گا۔

Answer: D.I किंवा II दोन्हीपैकी काहीही अनुसरण करत नाही
D.Neither I nor II follows
D. I اور II میں سے کوئی بھی لاگو نہیں ہو گا۔

66 आपणास शाळेतील वाचनालयाची अतिरिक्त जबाबदारी देण्यात आली असता, आपणास असे वाटते-

If you have been given the additional responsibility of the school library, you think that—

اگر آپ کو اسکول لائبریری کی اضافی ذمہ داری دی گئی ہے تو، آپ سوچتے ہیں کہ—

A.आपण येथील विशेष कर्मचारी आहात म्हणून आपणच येथे विशेष वाचक असणार
A.You are the exclusive reader as you are the exclusive worker there
A.آپ کو خصوصی قارئین کے طور پر آپ وہاں خصوصی کارکن ہیں

B.या वाचनालयावर आणि येथील वाचन साहित्यावर विद्यार्थी व शिक्षक दोघांचा अधिकार असणार
B.It is the right of both students and teachers on the library and its reading material
B.لائبریری اور اس کی پڑھنے والے مواد پر طالب علموں اور اساتذہ دونوں کا حق ہے

C.ग्रंथालयाच्या संसाधनाचे शोषण करण्यासाठी प्राचार्याचे हे मूळ अधिकार आहे.
C.It is the exclusive right of principal to exploit the resources of library.
C.لائبریری کے وسائل کا استحصال کرنا پرنسپل کا خصوصی حق ہے.

D.आपण या वाचनालयाचे स्वत: मलिक असणार आणि आपल्या ईच्छेनुसारच पुस्तके जारी होणार.
D.You are the sole owner of the library and you may issue books only according to your will.
D.آپ لائبریری کے واحد مالک ہیں اور آپ صرف اپنی مرضی کے مطابق کتابیں جاری کر سکتے ہیں.

Answer: B.या वाचनालयावर आणि येथील वाचन साहित्यावर विद्यार्थी व शिक्षक दोघांचा अधिकार असणार
B.It is the right of both students and teachers on the library and its reading material
B.لائبریری اور اس کی پڑھنے والے مواد پر طالب علموں اور اساتذہ دونوں کا حق ہے

67	प्रश्नासाठी सूचना: खालील मालिका पूर्ण करा. TC, RE, PG, NI, ____ DIRECTION: Complete the following series. TC, RE, PG, NI, ____ سوال کے لیے ہدایت:مندرجہ ذیل سیریز کو مکمل کریں۔ TC, RE, PG, NI, ____
	A.PU A.PU A.PU
	B.QT B.QT B.QT
	C.CM C.CM C.CM
	D.LK D.LK D.LK
Answer:	D.LK D.LK D.LK

68	दिलेल्या शब्दामधून खालीलपैकी कोणता शब्द तयार केला जाऊ शकतो? CORRESPONDING Which of the following word can be formed from the given word? CORRESPONDING دیےگیے لفظ سے مندرجہ ذیل الفاظ میں سے کونسا بنایا جاسکتا ہے؟ ‘CORRESPONDING’
	A.CORRECT A.CORRECT A.CORRECT

B.DISCERN
B.DISCERN
B.DISCERN

C.REPENT
C.REPENT
C.REPENT

D.RESPONSE
D.RESPONSE
D.RESPONSE

Answer: B.DISCERN
B.DISCERN
B.DISCERN

69 खालील आकृतीमध्ये किती समांतर चतुर्भुज (पॅरललोग्राम) आहेत?

How many parallelograms are there in the following figure?

نیچے دی ہوئی شکل میں کتنے متوازی الاضلاع ہیں؟

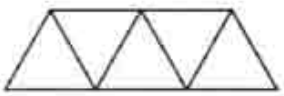

A. 3

B. 4

C. 5

D. 6

Answer: D. 6

70 जिवाणू रोग यामध्ये आढळतात

Bacterial diseases are found in

_____ میں بیکٹیریائی بیماریاں پائی جاتی ہیں

A.वनस्पती
A.Plants
A.پودوں

B.प्राणी
B.Animals
B.جانوروں

C.मानव
C.Humans
C.انسانوں

D.वरीलपैकी सर्व
D.All of the above
D.ان میں سے سبھی

Answer: D.वरीलपैकी सर्व
D.All of the above
D.ان میں سے سبھی

71 कडधान्य कश्याचे स्त्रोत आहेत

Pulses are source of

دالوں کی ذریعہ ہمیں ملتا ہے

A.प्रोटीन
A.Protein
A. پروٹین

B.कार्बोहायड्रेट
B.Carbohydrates
B. کاربوہائیڈریٹ

C.चरबी
C.Fat
C. چربی

D.काहीच नाही
D.None
D. کوئی بھی نہیں

Answer: A.प्रोटीन
A.Protein
A. پروٹین

72 जीवनसत्व क च्या अभावामुळे होणारा रोग -

Disease caused due to deficiency of Vitamin-C -

وٹامن سی کی کمی کی وجہ سے پیدا ہونے والی بیماری ہے -

A.स्कर्वी
A.Scurvy
A.اسکروی

B.बेरीबेरी
B.Beriberi
B.بیری بیری

C.रातअंधळेपणी
C.Night blindness
C.رات کا اندھا پن

D.थकवा
D.Fatigue
D.تھکاوٹ

Answer:

A.स्कर्वी
A.Scurvy
A.اسکروی

73 आपल्या शाळेत तुम्हाला एनसीसीमधील महत्वाचे पद दिले आहे. या क्षमतेत आपण च्या अनुसार काम करणार-

You are holding key position in NCC at your school. In this capacity you will be working according to—

آپ اپنے اسکول میں این سی سی میں اہم حیثیت رکھتے ہے۔ اس صلاحیت میں آپ کے مطابق کام کرنا ہوگا

A.तुमच्या वैयक्तिक कर्तव्याची जाणीव व निहित हितसंबंध लक्षात घेवून
A.Your personal conscience and vested interests
A.آپ کے ذاتی تحفظات اور مشترکہ مفادات

B.सरकारी नियमाखाली मंजूर झालेल्या वेगवेगळ्या मुख्य खर्चांप्रमाणे
B.Approved norms of the government under different heads of expenditure
B.اخراجات کی مختلف مدات کے تحت حکومت کے منظوری کے معیار

C.प्राचार्यांच्या वैयक्तिक सल्ल्याप्रमाणे
C.Principal’s personal advice
C.پرنسپل کا ذاتی مشورہ

D.आजच्या सामाजिक कलानुसार
D.The present social trends.
D.موجودہ سماجی رجحانات.

Answer: B.सरकारी नियमाखाली मंजूर झालेल्या वेगवेगळ्या मुख्य खर्चांप्रमाणे
B.Approved norms of the government under different heads of expenditure
B.اخراجات کی مختلف مدات کے تحت حکومت کے منظوری کے معیار

74

सूचना: खालील प्रश्नात, दिलेल्या पर्यायांमधून नातेसंबंध सांगणारी आकृती निवडा.

DIRECTIONS: In the question below, select the related figure from the given alternatives.

ہدایات: نیچے دیئے گئے سوال میں، دیئے گئے متبادلات میں سے متعلق متبادل چنئے۔

Problem Figures:

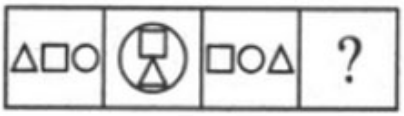

(A) (B) (C) (D)

Answer Figures:

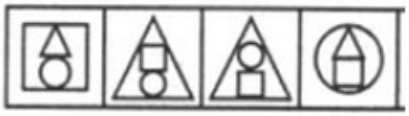

(1) (2) (3) (4)

A. 1

B. 2

C. 3

D. 4

Answer: C. 3

75

जर कानाला बोट म्हटले, बोटाला हात म्हटले, हाताला नाक म्हटले, नाकाला मान म्हटले, मानेला तोंड म्हटले, आणि तोंडाला डोके म्हटले. तर आपण गव्यातला हार कुठे घालू?

Ear is called finger, finger is called hand, hand is called nose, nose is called neck, neck is called mouth and mouth is called head. Which we wear necklace?

اگر انگلی کو کان، انگلی کو ہاتھ، ہاتھ کو ناک، ناک کو گردن، گردن کو منہ اور منہ کو سر کہا جائے تو ہم ہار کہاں پہنتے ہیں؟

A.नाक
A.Nose
A.ناک

B.मान
B.Neck
B.گردن

C.डोके
C.Head
C.سر

D.तोंड
D.Mouth
D.منہ

Answer: D.तोंड
D.Mouth
D.منہ

76 ‘ताठ’ या शब्दाचा विरुद्धार्थी शब्द कोणता ?

A.कडक

B.ताठर

C.करारी

D.शिथिल

Answer: D.शिथिल

77 खालील आकृतीमध्ये आयत पुरुष दर्शवतो, त्रिकोण सुशिक्षित दर्शवतो, वर्तुळ शहरी दर्शवते आणि चौरस सरकारी कर्मचारी दर्शवतो.

In the following diagram rectangle represents men, Triangle represents educated, Circle represents urban and square represents government employees.

مندرجہ ذیل ڈایاگرام میں مستطیل مردوں کی نمائندگی کرتا ہے، مثلث تعلیم یافتہ کی نمائندگی کرتا ہے، سرکل شہریوں کی نمائندگی کرتا ہے اور مربع سرکاری ملازمین کی نمائندگی کرتا ہے.

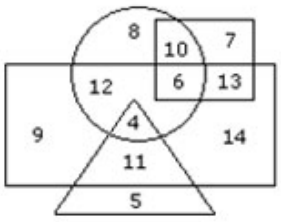

यापैकी कोणती आकृती सुशिक्षित पुरुष दर्शवते परंतु शहरी नाही?

Which one of the following represents the educated men but not urban?

مندرجہ ذیل میں سے کونسا ایک تعلیم یافتہ مردوں کی نمائندگی کرتا ہے لیکن شہریوں کی نہیں؟

A. 9

B. 5

C. 4

D. 11

Answer: D. 11

78 सूचना: हे प्रश्न खालील माहितीवर आधारित आहेत.
A, B, C, D, E, F, G, आणि H या आठ व्यक्तींपैकी प्रत्येकी एका वेगळ्या मजल्यांवर राहतो जिथे तळ मजल्याचा क्रमांक 1 आहे आणि तळ मजल्याच्या वरच्या मजल्याचा क्रमांक 2 आहे बाकी त्याचप्रमाणे आहेत आणि प्रत्येक व्यक्ती वेगळ्या उंचीची आहे परंतु त्याच क्रमाने असेल असे नाही.
फक्त तीन व्यक्ती D आणि F च्या मध्ये राहतात परंतु त्यातील दोघेही सम क्रमांकित मजल्यांवर राहत नाहीत. G पेक्षा उंच असलेल्या व्यक्तींची संख्या B पेक्षा ठेंगणे असलेल्या व्यक्तींच्या संख्ये इतकी आहे. B किंवा G दोन्हीपैकी कोणीही तिसरी सर्वात उंच किंवा सर्वात ठेंगणा व्यक्ती नाही. ते त्यांच्या उंचाच्या चढत्या क्रमवारीनुसार राहतात ज्याचा अर्थ आहे, सर्वात ठेंगणा व्यक्ती 1 क्रमांकित मजल्यावर राहतो आणि दुसरा ठेंगणा व्यक्ती मजला क्रमांकित 2 वर राहतो आणि याप्रमाणे बाकी. H हा E पेक्षा उंच आहे आणि B च्या तीन मजले खाली राहतो. A हा B पेक्षा ठेंगणा आहे परंतु D च्या बाजूला रहात नाही.
किती व्यक्ती F पेक्षा ठेंगणे आहेत?

DIRECTIONS: These questions are based on the following information.
Each one of eight persons A, B, C, D, E, F, G, and H – lives on a different floor of which the ground floor is numbered 1 and the floor above the ground floor is numbered 2 and so on and each one is of different height but not necessarily in the same order.
Only three persons live between D and F but neither of them lives on the even-numbered floor. The number of persons taller than G is equal to the number of persons shorter than B. Neither B nor G is either the third tallest or the shortest person. They live according to the ascending order of their heights which means the shortest person lives on the floor numbered 1 and the second shortest person lives on the floor numbered 2 and so on. H is taller than E and lives three floors below B. A is shorter than B but does not live adjacent to D.
How many persons are shorter than F?

ہدایات: یہ سوالات مندرجہ ذیل معلومات پر مبنی ہیں۔
آٹھ افراد A، B، C، D، E، F، G اور H میں سے ہر ایک مختلف فلور پر رہتا ہے جس کے گراؤنڈ فلور کا نمبر 1 ہے اور گراؤنڈ سے اوپر کے فلور کا نمبر 2 اور اسی طرح آگے ہے اور ہر ایک کی اونچائی مختلف ہے لیکن اس کی ترتیب لازمی طور پر یکساں نہیں ہے۔
D اور F کے درمیان صرف تین لوگ رہتے ہیں لیکن ان میں سے کوئی بھی جفت عدد کے فلور پر نہیں رہتا ہے۔ G سے لمبے لوگوں کی تعداد B سے لمبا یا سب سے چھوٹا ہے۔ وہ اپنی نہ ہی G نہ تو B کی تعداد کے برابر ہے۔ سے چھوٹے لوگوں کی تعداد یا تو تیسرا سب سے لمبا یا سب سے چھوٹا ہے۔
اونچائیوں کی صعودی ترتیب کے مطابق رہتے ہیں جس کا مطلب ہے سب سے چھوٹا شخص 1 نمبر کے فلور پر رہتا ہے اور دوسرا سب سے چھوٹا شخص 2 نمبر کے فلور پر رہتا ہے اور اسی طرح آگے۔
A، B سے تین فلور نیچے رہتا ہے۔ B سے لمبا ہے اور H، E سے چھوٹا ہے۔ D چھوٹا ہے لیکن کے قریب میں نہیں رہتا ہے۔
F کتنے لوگ سے چھوٹے ہیں؟

A.पाच
A.Five
A.پانچ

B.दोन
B.Two
B.دو

C.चार
C.Four
C.چار

D.कोणतेही नाही
D.None
D.کوئی نہیں

Answer: C.चार
C.Four
C.چار

79 सूचना: अर्थपूर्ण परिच्छेद निर्माण करण्यासाठी, खाली दिलेली (P), (Q) (R), (S) आणि (T) ही पाच वाक्ये योग्य अनुक्रमाने पुनर्रचना करा; त्यांनतर खालील प्रश्नांची उत्तर द्या.

P. "मला तहान भागवायची आहे." असा तो विचार करतो.
Q. विविध प्रकारे प्रयत्न करूनही तो द्राक्षांच्या घडाजवळ पोहचत नाही.
R. "ती आंबट आहेत याची मला खात्री आहे," असे म्हणत अखेर तो आपले प्रयत्न सोडून देते.
S. गरम उन्हाळ्यात एके दिवशी एक कोल्हा एका द्राक्षांच्या बागेत जातो आणि पिकलेल्या द्राक्षांचा घड लटकलेला पाहतो.
T. तो थोडे अंतर मागे जाते, मग पळत येऊन उडी मारतो, पण द्राक्षापर्यंत पोहचयाला उडी कमी पडते.

पुनर्रचना केल्यानंतर खालीलपैकी कोणते वाक्य पाचवे असेल?

DIRECTION: Rearrange the following five sentences (P), (Q), (R), (S) and (T) in the proper sequence to form a meaningful paragraph; then answer the questions given below them.
P. It thinks: “Just what I need to quench my thirst.”
Q. It tries in different ways to reach the bunch of grapes, but in vain.
R. It finally gives up saying “I am sure they are sour anyway.”
S. On a hot summer day, a fox comes upon an orchard and sees a bunch of ripened grapes.
T. It moves back a few paces, runs, and jumps but falls short of reaching the grapes.

Which of the following should be the FIFTH sentence after rearrangement?

ہدایات: ان پانچ جملوں (P)، (Q)، (R)، (S) اور (T) کو با معنی پیرا بنانے کے لئے دوبارہ ترتیب دیجئے، پھر نیچے دے گئے سوالوں کے جواب دیجئے

P. اسنے سونچا: " بلکل جو مجھے پیاس بجانے کے لئے چاہیے.
Q. اسنے انگور تک پہنچ نے کے کہی طریقے اختیار کے، مگر سارے ناکام.
R. آخر کار اسنے یہ ارادہ چھوڈ دیا یہ کہکر" مجھے یکین ہے کہ یے ویسے بھی کھٹے ہے."
S. ایک گرمی کے دن، ایک لومڑی باغ میں آی اور انگور کہ گچھا دیکھا.
T. وو کچھ کدم پیچھے گی، دھوڈی ، اور چھلانگ لگائی لکی انگور تک نہی پہنچی.

دوبارہ ترییب دینے کے بعد کون سا جملہ پانچوہ ہونا چاہیے؟

A.R
A.R
A.R

B.P
B.P
B.P

C.Q
C.Q
C.Q

D.T
D.T
D.T

Answer: A.R
A.R
A.R

80 जेव्हा सोन्यात तांबे मिसळले जाते ते होते:-

When gold is mixed with copper it becomes:-

جب سونا تانبا میں ملتا ہے تو یہ _____ بن جاتا ہے۔

A.कडक
A.Hard
A.سخت

B.मऊ
B.Soft
B.نرم

C.अधिक मुलायम
C.More luster
C.مزید چمکیلا

D.अधिक पिवळसर
D.More yellowish
D.مزید پیلا

Answer: A.कडक
A.Hard
A.سخت

81 सूचनाः दिलेल्या पर्यायांमधून ऍनालॉगस शब्द निवडा.

गॅल्वानोमीटरचा संबंध विद्युत प्रवाहाशी आहे जसा स्पेक्ट्रोमीटरचा संबंध ...सोबत आहे.

DIRECTIONS: Choose the analogous word from the given alternatives.

Galvanorneter is to Electric Current as Spectrometer is to _____.

ہدایات: دیے گئے متبادل سے مطابق لفظ کا انتخاب کریں

گلونومیٹرکا تعلق بجلی کے ساتھ ویسے ہی ہے جیسا کہ سپیکٹرومیٹر کا ــــــــ کے ساتھ .

A.वायूंची घनता
A.Density of gases
A. گسس کا گناپن

B.वाऱ्याचा वेग
B.Wind speed
B. ہوا کی رفتار

C.उच्च तापमान
C.High temperatures
C. بلند حرارت

D.प्रकाशाची संरचना
D.Composition of light
D. روشنی کی بناوٹ

Answer: D.प्रकाशाची संरचना
D.Composition of light
D. روشنی کی بناوٹ

82 1972 ची दिनदर्शिका ही वर्षानंतर लगेच वापरली?

The calendar of 1972 used just after in the year?

1972 کا کیلنڈر صرف اس سال کے بعد استعمال کیا گیا؟

A.1977
A.1977
A.1977

B.1981
B.1981
B.1981

	C.1976 C.1976 C.1976
	D.2000 D.2000 D.2000
Answer:	D.2000 D.2000 D.2000

83	‘कोता’ या शब्दाचा समानार्थी शब्द कोणता ?
	A.मोठा
	B.खोटा
	C.आखूड
	D.प्रशस्त
Answer:	C.आखूड

84	एल पी जीचा मुख्य घटक आहे: The main constituents of LPG are: ایل پی جی کے اصل اجزاء ہیں:
	A.मिथेन A.Methane A.میتھین
	B.इथेन B.Ethane B.ایتھین
	C.ब्युटेन C.Butane C.بوٹین
	D.प्रोपेन D.Propane D.پروپین

Answer: C.ब्युटेन
C.Butane
C.بوٹین

85 खालीलपैकी शुद्ध शब्द कोणता ?

A.कपीलाशाष्टी

B.कापिलाशाष्टी

C.कपिलाषष्टी

D.कपीलाषष्टी

Answer: C.कपिलाषष्टी

86 एका विशिष्ट सांकेतिक भाषेमध्ये, जर MATERIALS हा शब्द DSZLSTMBJ असा कूटबध्द केला जात असेल, REASONING हा शब्द त्या भाषेत कसा कूटबध्द केला जाईल?

In a certain code language, if the word MATERIALS is coded as DSZLSTMBJ, then how is the word REASONING coded in that language?

ایک مخصوص ضابطے کی زبان میں، اگر لفظ MATERIALS کو DSZLSTMBJ لکھا جاتا ہے، تو اس زبان میں لفظ REASONING کو کیسے لکھاجائیگا؟

A.RZDQPHOJO
A.RZDQPHOJO
A.RZDQPHOJO

B.PFBTPOJOH
B.PFBTPOJOH
B.PFBTPOJOH

C.HOJOPQDZR
C.HOJOPQDZR
C.HOJOPQDZR

D.RZDQPOJOH
D.RZDQPOJOH
D.RZDQPOJOH

Answer: A.RZDQPHOJO
A.RZDQPHOJO
A.RZDQPHOJO

87 निर्देश: खालीदिलेल्या अक्षराच्या क्रमात काही अक्षरे गहाळ केली आहेत ते त्या क्रमाने खाली दिलेल्या पर्यायांपैकी एक आहे

a _ bca _ bcab _ ca _ bc

DIRECTIONS: In each of the following letter series, same of the letters are missing which are given in that order as one of the alternatives below it.

a _ bca _ bcab _ ca _ bc

ہدایت جیل کے حرف سرج میں کوئی حرف گمشدہ ہے آپکو انکی شناخت جیل کے اختیارات سے کرنی ہے

a _ bca _ bcab _ ca _ bc

A.abca
A.abca
A.abca

B.aabc
B.aabc
B.aabc

C.baca
C.baca
C.baca

D.babb
D.babb
D.babb

Answer: A.abca
A.abca
A.abca

88 एका घनाला रंगवून किमान शक्य संख्येचे काप करून 120 लहान पण एकसारख्या तुकड्यांमध्ये कापले गेले आहे. घन कापण्यासाठी आवश्यक असलेल्या कापांची किमान संख्या काय आहे ?

A cube is painted and cut into 120 smaller but identical pieces by making the minimum possible number of cuts. What is the minimum number of cuts required to cut a cube?

ایک کیوب کو ایک جیسے 120 ٹکڑوں میں رنگ دے کر کاٹا گیا ہے۔ کم سے کم ممکن کٹ لگاتے ہوئے, کیوب کو کاٹنے کے لئے کم سے کم کتنے کاٹ کی ضرورت پڑے گی؟

A.12
A.12
A.12

B.8
B.8
B.8

C.6
C.6
C.6

D.10
D.10
D.10

Answer: A.12
A.12
A.12

89 निर्देश: खालील प्रत्येक वर्ण मालिके मध्ये, काही अक्षरे गहाळ आहेत, जे खाली दिलेल्या पर्यायां मध्ये एका क्रमाने दिलेली आहेत. योग्य पर्याय निवडा.

a - bbc - aab - cca - bbcc

DIRECTION: In each of the following letter series, some of the letters are missing, which are given in that order as one of the alternatives below it. Choose the correct alternative.

a - bbc - aab - cca - bbcc

ہدایت نیچے دے حرف کے سرج مے کچھ حرف گمشدہ ہے نیچے دے گئے اختیارات سے سسہی اختیار چنے

a - bbc - aab - cca - bbcc

A.bacb
A.bacb
A.bacb

B.acba
B.acba
B.acba

C.abba
C.abba
C.abba

D.caba
D.caba
D.caba

Answer: B.acba
B.acba
B.acba

90 पुढील जोडशब्द पूर्ण करा . ‘सगे ----------’

A.भाऊ

B.नाते

C.सोयरे

D.धागे

Answer: C.सोयरे

91 ओडीसामधून कोणत्या नृत्य प्रकाराचा उगम झाला?

Which dance from has originated from Odisha?

رقص کی کونسی قسم کا تعلق اوڑیشہ سے ہے :

A.कथकली
A.Kathakali
A.کتھا کلی کا

B.कथ्थक
B.Kathak
B.کتھک کا

C.भरतनाट्यम
C.Bharatnatyam
C. بھرتناٹیم کا

D.यांपैकी कोणतेही नाही
D.None of these
D.انمیں سے کوئی نہیں

For More Info And Videos About TAIT-Exam Syllabus And Other Exam Visit My Channel
TAIT च्या 30 प्रश्नपत्रिका PDF
BADSHAHimp Available Request 9765226781
WWW.YouTube.com/BADSHAHimp
Subscribe My Channel

Answer: D.यांपैकी कोणतेही नाही
D.None of these
D.انمیں سے کوئی نہیں

92 मोतीबिंदूचे मुख्य कारण काय आहे?

What is the main cause of Cataract?

موتیابند ہونے کی بنیادی وجہ کیا ہے؟

A.अनुवंशिकता
A.Heredity
A.خاندانی

B.वृद्धहोणे
B.Aging
B.عمر کا بڑھنا

C.वैद्यकिय स्थिती
C.Medical conditions
C.میڈیکل حالت

D.यापैकी सर्व
D.All of these
D.ان میں سے سب

Answer: D.यापैकी सर्व
D.All of these
D.ان میں سے سب

93 दूध आणि पाण्याच्या 450 लिटर मिश्रणामध्ये दूध आणि पाणी 9 : 1 या प्रमाणात आहे. दूध आणि पाणी 3 : 1 गुणोत्तरात असलेले नवीन मिश्रण मिळवण्यासाठी किती पाणी मिसळले जावे?

450 liters of a mixture of milk and water contain the milk and water in the ratio 9 : 1. How much water should be added to get a new mixture containing milk and water in the ratio 3 : 1?

450لیٹر دودھ اور پانی کے مرکب میں دودھ اور پانی کا تناسب 9 : 1 ہے۔ 3 : 1 کے تناسب پر مشتمل دودھ اور پانی ایک نیا مرکب حاصل کرنے میں کتنا پانی شامل کیا جانا چاہئے؟

A.54
A.54
A.54

For More Info And Videos About TAIT-Exam Syllabus And Other Exam Visit My Channel
TAIT च्या 30 प्रश्नपत्रिका PDF
BADSHAHimp Available Request 9765226781
WWW.YouTube.com/BADSHAHimp
Subscribe My Channel

B.90
B.90
B.90

C.45
C.45
C.45

D.63
D.63
D.63

Answer: B.90
B.90
B.90

94 मंत्र्याच्या विरोधात अविश्वासाचा प्रस्ताव पारीत केल्याचा परिणाम:

A no-confidence motion passed against minister results in:

عدم اعتماد کی تحریک وزیر کے خلاف لائی جاتی ہے جسکے نتیجہ میں

A.संपूर्ण मंत्र्यांच्या परिषदेचा राजीनामा
A.Resignation of whole of council of Ministers
A. وزراء کی پوری کونسل کا استعفی

B.संबंधीत मंत्री आणि पंतप्रधानांचा राजीनामा
B.The resignation of the concerned Minister and of the P.M.
B. وزیر اور وزیر اعظم کو مستعفی ہونا پڑتا ہے

C.लोकसभा राज्यसभेमध्ये विलिन होते
C.The Lok Sabha merges with Rajya Sabha
C. لوک سبھا کو راجیہ سبھا کے ساتھ ضم کردیا جاتا ہے

D.वरीलपैकी एकही नाही
D.None of these
D. ان میں سے کوئی بھی نہیں

Answer: A.संपूर्ण मंत्र्यांच्या परिषदेचा राजीनामा
A.Resignation of whole of council of Ministers
A. وزراء کی پوری کونسل کا استعفی

For More Info And Videos About TAIT-Exam Syllabus And Other Exam Visit My Channel
TAIT च्या 30 प्रश्नपत्रिका PDF
BADSHAHimp Available Request 9765226781
WWW.YouTube.com/BADSHAHimp
Subscribe My Channel

95 सूचना: दिलेल्या पर्यायांमधून वेगळे ते बाहेर काढा.

DIRECTIONS: Find the odd one out from the given alternatives.

سمت: دیے گئے متبادل میں سے بے جوڑ کو تلاش کرو۔

A.9: 80
A.9: 80
A.9: 80

B.1 : 0
B.1 : 0
B.1 : 0

C.0.27430555555555552
C.0.27430555555555552
C.0.27430555555555552

D.10 : 91
D.10 : 91
D.10 : 91

Answer: D.10 : 91
D.10 : 91
D.10 : 91

96 “बुद्धी” म्हणजे

“Buddhi” is

‘بُدھی’ کا معنی ہے‘

A.बुद्धिमत्ता
A.Intelligence
A.ذہانت

B.भावना
B.Emotions
B.جذبات

C.आत्म-संकल्पना
C.Self-concept
C.خود پرستاری

D.मूल्यांकन
D.Analysis
D. تجزیہ تحلیل

Answer: A.बुद्धिमत्ता
A.Intelligence
A.ذہانت

97 ऑफ. साईड, गोल किक इ. _____ मध्ये वापरल्या जाणाऱ्या संकल्पना आहेत –

Off. Side, Goal Kick etc. are terms used in-

آف سائڈ ، گول کک استعمال ہوتا ہے :

A.क्रिकेट
A.Cricket
A.کرکٹ میں

B.हॉकी
B.Hockey
B.ہاکی میں

C.फुटबॉल
C.Football
C.فٹ بال میں

D.व्हॉली बॉल
D.Volley ball
D.والی بال میں

Answer: C.फुटबॉल
C.Football
C.فٹ بال میں

98 जर आपण गरीब विद्यार्थ्यांच्या समितीचे वरिष्ठ सदस्य असाल, तर तुमचा विद्यार्थ्यांना आर्थिक मदत करण्यासाठी वितरीत करण्याचा निकष काय असेल?

If you will be the senior member of poor student's committee, what will be your criteria to disburse the financial aid to the students

اگر آپ غریب طلباء کی کمیٹی کے سینئر ممبر ہوں گے تو، آپ کا طالب علموں کو مالی امداد کی فراہمی کا کیا معیار ہوگا؟

A.आपल्या आवडत्या विद्यार्थ्यांनाच आर्थिक मदत जाणार
A.Financial support must go to your favorable students
A.مالی معاونت آپ کے موافق طالب علموں کو ملنی چاہئے

For More Info And Videos About TAIT-Exam Syllabus And Other Exam Visit My Channel
TAIT च्या 30 प्रश्नपत्रिका PDF
BADSHAHimp Available Request 9765226781
WWW.YouTube.com/BADSHAHimp
Subscribe My Channel

B.इच्छुक विद्यार्थ्यांनाच आर्थिक मदत जाणार
B.Financial support must go to the desirable students
B.مالی مدد مقصودی طالب علموں کو ملنی چاہئے

C.शिक्षकाचे प्रत्येक काम ऐकनाऱ्या विद्यार्थ्यांमध्ये आर्थिक मदत वाटली जाणार
C.Financial support must be distributed to the students giving every service to the teacher
C.ان طالب علموں کو مالی امداد لازمی ملنی ہے جو استاد کو ہر سروس فراہم کرتے ہیں

D.तुम्ही सक्षम नाही आणि हे करण्यास ओझ वाटत आहे.
D.You are neutral and feel it a burden.
D.آپ غیر جانبدار ہیں اور اسے بوجھ محسوس کرتے ہیں.

Answer: B.इच्छुक विद्यार्थ्यांनाच आर्थिक मदत जाणार
B.Financial support must go to the desirable students
B.مالی مدد مقصودی طالب علموں کو ملنی چاہئے

99 Out of the given options, choose the most appropriate one to fill in the blank.
The balloon_____ gently up into the air.

A.rose

B.have rise

C.have rose

D.has rise

Answer: A.rose

100 चांगल्याप्रकारे पिसलेल्या कार्ड्सच्या पॅकमधून एक कार्ड काढण्यात आले, तर काढलेले कार्ड संख्येचे कार्ड असण्याची शक्यता काढा.

If a card is drawn from a well shuffled pack of cards, then find the probability that the card drawn is a numbered card.

اگر ایک کارڈ کو اچھی طرح پلائے گئے پیکٹ سے نکالا جاتا ہے ، اس امکان کا پتہ لگائیں کہ کارڈ ایک نمبر کارڈ ہے.

A.6/13
A.6/13
A.6/13

B.39/52
B.39/52
B.39/52

C.40/52
C.40/52
C.40/52

D.9/13
D.9/13
D.9/13

Answer: D.9/13
D.9/13
D.9/13

101 एका स्त्रीकडे बोट दाखवून, एक पुरुष म्हणतो, “तिच्या पतीचा मुलगा माझ्या वडिलांचा नातू आहे”. मग त्या स्त्रीचे त्या पुरुषासोबत नाते काय?

Pointing to a lady, a man said, ‘The son of her husband is the grandson of my father’. How is the lady related to the man?

عورت کی طرف اشارہ کرکے، آدمی نے کہا، " اسکے شوہر کا بیٹا میرے باپ کا پوتا ہے'. عورت کا آدمی سے کیا رشتہ تھا؟

A.मामी
A.Maternal Aunt
A.خالا

B.सासू
B.Mother-in-law
B.ساس

C.बहीण
C.Sister
C.بہن

D.पत्नी
D.Wife
D.بیوی

Answer: D.पत्नी
D.Wife
D.بیوی

For More Info And Videos About TAIT-Exam Syllabus And Other Exam Visit My Channel
TAIT च्या 30 प्रश्नपत्रिका PDF
BADSHAHimp Available Request 9765226781
WWW.YouTube.com/BADSHAHimp
Subscribe My Channel

102	स्पिअरमॅनने ____ हा सिद्धांत विकसित केला Spearman developed _____theory اسپیئرمین نے_____ نظریہ ڈولپ کیا ہے
	A.मानसिक क्षमता सिद्धांत A.Theory of mental ability A. دماغی اہلیت کا نظریہ
	B.बुद्धिमत्तेच्या अमूर्त पातळीची संकल्पना B.Concept of abstract level of intelligence B. انٹیلی جنس کے خلاصہ سطح کا تصور
	C.दोन प्रकारच्या क्षमता सिद्धांत C.Two type ability theory C. دو قسم کی اہلیت کا نظریہ
	D.दोन-घटकीय बुद्धिमत्ता सिद्धांत D.Two factor theory of intelligence D. ذہانت کے دو عناصر کا نظریہ
Answer:	D.दोन-घटकीय बुद्धिमत्ता सिद्धांत D.Two factor theory of intelligence D. ذہانت کے دو عناصر کا نظریہ
103	सरळसरळ प्रभावआहे- Flat effect is فلیٹ اثر ہے
	A.वाकशक्ति कमी होणे A.Reduction in speech A. تقریر میں کمی
	B.अजिबात भावना व्यक्त न करणे B.Not showing emotions at all B. بالکل جذبات کو ظاہر نہیں
	C.इतरांपेक्षा कमी भावना दर्शवणे C.Showing less feelings than others C. دوسروں کے مقابلے میں کم احساسات دکھاتے ہیں
	D.सामाजिक माघार घेणे D.Social withdrawal D. سماجی واپسی

Answer: B.अजिबात भावना व्यक्त न करणे
B.Not showing emotions at all
B.بالکل جذبات کو ظاہر نہیں

104 सूचना: हे प्रश्न खालील माहितीवर आधारित आहेत.
A, B, C, D, E, F, G, आणि H या आठ व्यक्तींपैकी प्रत्येकी एका वेगळ्या मजल्यांवर राहतो जिथे तळ मजल्याचा क्रमांक 1 आहे आणि तळ मजल्याच्या वरच्या मजल्याचा क्रमांक 2 आहे बाकी त्याचप्रमाणे आहेत आणि प्रत्येक व्यक्ती वेगळ्या उंचीची आहे परंतु त्याच क्रमाने असेल असे नाही.
फक्त तीन व्यक्ती D आणि F च्या मध्ये राहतात परंतु त्यातील दोघेही सम क्रमांकित मजल्यांवर राहत नाहीत. G पेक्षा उंच असलेल्या व्यक्तींची संख्या B पेक्षा ठेंगणे असलेल्या व्यक्तींच्या संख्ये इतकी आहे. B किंवा G दोन्हीपैकी कोणीही तिसरी सर्वात उंच किंवा सर्वात ठेंगणा व्यक्ती नाही. ते त्यांच्या उंचाच्या चढत्या क्रमवारीनुसार राहतात ज्याचा अर्थ आहे, सर्वात ठेंगणा व्यक्ती 1 क्रमांकित मजल्यावर राहतो आणि दुसरा ठेंगणा व्यक्ती मजला क्रमांकित 2 वर राहतो आणि याप्रमाणे बाकी. H हा E पेक्षा उंच आहे आणि B च्या तीन मजले खाली राहतो. A हा B पेक्षा ठेंगणा आहे परंतु D च्या बाजूला रहात नाही.
आठव्या मजल्यावर कोण राहतो?

DIRECTIONS: These questions are based on the following information.
Each one of eight persons A, B, C, D, E, F, G, and H – lives on a different floor of which the ground floor is numbered 1 and the floor above the ground floor is numbered 2 and so on and each one is of different height but not necessarily in the same order.
Only three persons live between D and F but neither of them lives on the even-numbered floor. The number of persons taller than G is equal to the number of persons shorter than B. Neither B nor G is either the third tallest or the shortest person. They live according to the ascending order of their heights which means the shortest person lives on the floor numbered 1 and the second shortest person lives on the floor numbered 2 and so on. H is taller than E and lives three floors below B. A is shorter than B but does not live adjacent to D.
Who lives on the eighth floor?

ہدایات: یہ سوالات مندرجہ ذیل معلومات پر مبنی ہیں۔
آٹھ افراد A، B، C، D، E، F، G اور H میں سے ہر ایک مختلف فلور پر رہتا ہے جس کے گراؤنڈ فلور کا نمبر 1 ہے اور گراؤنڈ سے اوپر کے فلور کا نمبر 2 اور اسی طرح آگے ہے اور ہر ایک کی اونچائی مختلف ہے لیکن اس کی ترتیب لازمی طور پر یکساں نہیں ہے۔
D اور F کے درمیان صرف تین لوگ رہتے ہیں لیکن ان میں سے کوئی بھی جفت عدد کے فلور پر نہیں رہتا ہے۔ G سے لمبے لوگوں کی تعداد B سے چھوٹے لوگوں کی تعداد کے برابر ہے۔ نہ تو B نہ ہی G وہ اپنی یا تو تیسرا سب سے لمبا یا سب سے چھوٹا ہے۔
اونچائیوں کی صعودی ترتیب کے مطابق رہتے ہیں جس کا مطلب ہے سب سے چھوٹا شخص 1 نمبر کے فلور پر رہتا ہے اور دوسرا سب سے چھوٹا شخص 2 نمبر کے فلور پر رہتا ہے اور اسی طرح آگے۔ B سے لمبا ہے اور H، E سے تین فلور نیچے رہتا ہے۔ A، B کے قریب میں نہیں رہتا ہے۔ D چھوٹا ہے لیکن
آٹھویں فلور پر کون رہتا ہے؟

A.A
A.A
A.A

B.G
B.G
B.G

C.F
C.F
C.F

D.C
D.C
D.C

Answer: D.C
D.C
D.C

105 $\sqrt{49} - \sqrt{9}$ चे मूल्य किती असेल?

What will be the value of $\sqrt{49} - \sqrt{9}$

$\sqrt{49} - \sqrt{9}$ کی قدر کیا ہوگی

A. 8

B. 3

C. 4

D. 7

Answer: C. 4

106 राजदीप सरदेसाई हे _____ आहेत

Rajdeep Sardesai is a-

راجدیپ سارڈیسائی ہیں :

A.संगीत कार
A.Musician
A.موسیقی کار

B.पत्रकार
B.Journalist
B.جرنلسٹ

C.राजकारणी
C.Politician
C.سیاسی لیڈر

D.यांपैकी कोणतेही नाही
D.None of these
D.انمیں سے کوئی نہیں

Answer: B.पत्रकार
B.Journalist
B.جرنلسٹ

107 खालीलपैकी कोणते कारण बहुधा ध्वनिविषयक विकाराशी संबंधित शारीरिक कारण नाही

Which of the following is not a physical cause often associated with phonological disorder

مندرجہ ذیل میں سے کون اکثر طویل مدتی بیماری جسمانی سبب سے نہیں ہوتی ہے

A.श्रवण अक्षमता
A.Hearing impairment
A.سمعی خرابی

B.छिन्न तालु
B.Cleft palate
B.حنک مشقوق

C.अग्र खंड लहान असणे
C.Small frontal lobes
C.چھوٹا سامنے کا لختہ

D.सेरेब्रल पाल्सी
D.Cerebral palsy
D.دماغی فالج

Answer: C.अग्र खंड लहान असणे
C.Small frontal lobes
C.چھوٹا سامنے کا لختہ

108 ‘ रामाला फळ-भाजी फार आवडते.’ या वाक्यातील विशेषण ओळखा.

A.राम

B.फळ

C.भाजी

D.फार

Answer:	B.फळ	

109	‘ नाविक ’ या शब्दाची संधी सोडवा.	
	A.नौ + इक	
	B.नऊ + इक	
	C.नाव + इक	
	D.नव + इक	
Answer:	A.नौ + इक	

110	Out of the given options, choose the one which is the correct active voice of the sentence given below. Grammar is taught to us by the teacher.	
	A.The teacher teaches us grammar.	
	B.The teacher is teaching us the grammar.	
	C.The teacher has taught us a grammar.	
	D.The teacher taught us the grammar.	
Answer:	A.The teacher teaches us grammar.	

111	वनस्पतीच्या वैज्ञानिक अभ्यासाला म्हणतात The scientific study of plants is known as پودوں کے سائنسی مطالعہ کو کہتے ہیں	
	A.वनसपतीशास्त्र A.Botany A. نباتیات	
	B.प्राणीशास्त्र B.Zoology B. حیوانیات	

C.मानसशास्त्र
C.Psychology
C. نفسیات

D.वरीलपैकी एकही नाही
D.None of these
D. ان میں سے کوئی بھی نہیں

Answer:
A.वनसपतीशास्त्र
A.Botany
A. نباتیات

112

6, 12 आणि 18 या प्रत्येकाने भाग जाणारा सर्वांत लहान पूर्ण वर्ग?

The smallest perfect square divisible by each of 6, 12 and 18 is?

6، 12 اور 18 کی طرف سے تقسیم ہونے والی سب سے چھوٹی کامل مربع ہے؟

A.196
A.196
A.196

B.144
B.144
B.144

C.108
C.108
C.108

D.36
D.36
D.36

Answer:
D.36
D.36
D.36

113

सामान्यत: किशोरावस्थेत चिंता,राग व तणाव भरून असते. आपण कसे त्याच्या ताण व तणावास शांत करणार?

Generally an adolescent is full of anxiety, anger and tension. How would you sublimate his stress and strain?

عام طور پر ایک نوجوانوں پریشانی، غصہ اور کشیدگی سے بھرا ہوا ہے۔ آپ ان کی کشیدگی اور پریشانی کو کس طرح کم کریں گے؟

A.मैत्री संबंधामार्फत, त्याच्या खाजगी जीवनाबद्दल जाणून व त्याला भावनिक सुख देऊन
A.Through friendly relations, sharing his private life and giving due emotional comforts
A.دوستانہ تعلقات کے ذریعہ، اپنی نجی زندگی کا اشتراک کرتے ہوئے اور جذباتی سہولت فراہم کرتے ہیں

B.दडपशाहीच्या माध्यमातून
B.Through repressing measures
B.سختی کے اقدامات کے ذریعے

C.नकारांद्वारे किंवा त्याचा विषय सोडून देणार
C.Through rejection and leave him in isolation
C.ردعمل کے ذریعے اور اسے تنہائی میں چھوڑ کر

D.एक तत्वज्ञानी म्हणून चेष्टा करणार
D.By making a mockery as a philosopher.
D.فلسفی کی طرح ایک مذاق کر کے.

Answer: A.मैत्री संबंधामार्फत, त्याच्या खाजगी जीवनाबद्दल जाणून व त्याला भावनिक सुख देऊन
A.Through friendly relations, sharing his private life and giving due emotional comforts
A.دوستانہ تعلقات کے ذریعہ، اپنی نجی زندگی کا اشتراک کرتے ہوئے اور جذباتی سہولت فراہم کرتے ہیں

114 सूचना: प्रत्येक प्रश्नाला एक प्रमुख विधानासोबत चार विधाने आहेत ज्यांच्याखाली A, B, C आणि D असे चार विधान आहेत. क्रमवार विधानांची जोडी निवडा ज्यामध्ये प्रथम विधान दुसऱ्या विधानाला सुचवते, आणि दोन्ही विधाने तर्किकदृष्ट्या प्रमुख विधानासोबत निगडित असेल.

जर तिची निवड झाली, तर ती अधिकारी होईल
A. तिची निवड झाली
B. तिची निवड झाली नाही
C. ती एक अधिकारी होईल
D. ती अधिकारी नाही होईल

DIRECTIONS: Each question has a main statement followed by four statements labelled A, B, C and D. Choose the ordered pair of statements, where the first statement implies the second, and the two statements are logically consistent with the main statement.

If she gets selected, she will be an officer
A. she got selected
B. she did not get selected
C. she will be an officer
D. she will not be an officer

ہدایت: ہر سوال میں ایک جملہ ہے جسکے بعد چار جملےاے، بی،سی اور ڈی کے نام سے دئے گئے ہیں اسمیں منسلک جوڑیوں کو چنئے۔ جہاں پہلا جملہ دوسرے جملہ کی اور اشارہ کر رہا ہے اور دو جملے منطقی مرکزی بیان کے مطابق ہیں

اگر وہ سلیکٹ ہوئی تو وہ افسر بن جائے گی
A۔ وہ سلیکٹ ہو گئی
B۔ وہ سلیکٹ نہیں ہوئی
C۔ وہ افسر بن جائے گی
D۔ وہ افسر نہیں ہے

A.AC
A.AC
A.AC

B.BC
B.BC
B.BC

C.DA
C.DA
C.DA

D.CD
D.CD
D.CD

Answer: A.AC
A.AC
A.AC

115 एका 4-वर्षीय मुलाला फक्त एक मोठी बहीण आहे. तुला बहीण आहे काय असे त्याला विचारण्यात आल्यास तो ____ असे उत्तर देईल आणि तुला एक भाऊ आहे काय असे विचारण्यात आल्यास तो ____ असे उत्तर देण्याची शक्यता आहे

A 4 year old boy has an elder sister only. if asked whether he has a sister he will Answer _____ and when asked if he has a brother he will Answer _____ more likely

ایک 4 سالہ کے لڑکے کی ایک ہی بڑی بہن ہے۔ اگر پوچھا جائے کہ کیا ان کی بہن ہے وہ جواب دے گا_____ اور جب ان سے پوچھا جائے گا آیا اس کا کوئی بھائی ہے وہ جواب دےگا_____ غالبا

A.होय: नाही
A.yes: no
A.ہاں:نہیں

B.नाही: नाही
B.no: no
B.نہیں:نہیں

C.नाही: होय
C.no: yes
C.نہیں: ہاں

D.होय: होय
D.yes: yes
D.ہاں: ہاں

Answer: A.होय: नाही
A.yes: no
A.ہاں:نہیں

116 सूचना: खाली दिलेल्या प्रश्नात एक विधान आहे ज्याचे I आणि II असे दोन निष्कर्ष त्याखाली अंकित केलेले आहेत. या आधारे सर्वात योग्य पर्याय निवडा.

विधान:
एक आधुनिक स्त्री तिचे आयुष्य हे तिच्या आवडीनुसार जगण्याचे ठरवू शकते, जे स्वातंत्र्य तिच्या प्राचीन काळात तिला नाकारण्यात आले होते.

निष्कर्ष:
I. आधुनिक स्त्रियांसाठी लग्न हा एक ऐच्छिक भाग आहे.
II. प्राचीन काळात लग्न करणे स्त्रियांसाठी अनिवार्य होते.

DIRECTIONS: The question below has a statement followed by two conclusions numbered I and II. Based on this choose the option that is most suitable.

Statement:
The modern woman can choose to live her life as per her choices, a freedom denied to her ancient counterpart.

Conclusions:
I. Marriage is optional for modern women.
II. Marriage was compulsory for women of ancient times.

ہدایات: نیچے دیے گئے سوال میں ایک بیان کے بعد دو نتائج دیے گئے ہیں۔ اس کی بنیاد پرانتہائی موزوں آپشن کا انتخاب کیجیے۔ I اور II

بیان:
جدید عورت اپنے انتخاب کے مطابق اپنی زندگی گذار سکتی ہے جبکہ یہ آزادی اسکی قدیم ہم منصب کو مہیا نہیں ہے.

نتیجے:
I. جدید خواتین کے لئے شادی اختیاری ہے.
II. قدیم دور کی خواتین کے لئے شادیلازمی تھی.

A.केवळ निष्कर्ष क्रमांक I विधानास अनुसरून आहे
A.Only Conclusion I follows
A.صرف نتیجہ I لاگو ہو گا۔

B.केवळ निष्कर्ष क्रमांक II विधानास अनुसरून आहे
B.Only Conclusions II follows
B.صرف نتیجہ II لاگو ہو گا۔

C.निष्कर्ष क्रमांक I किंवा II अनुसरून आहे
C.Either I or II follows
C. I یا II میں سے ایک لاگو ہو گا۔

D.कोणताही निष्कर्ष अनुसरून नाही
D.Neither I nor II follow
D. I اور II میں سے کوئی بھی لاگو نہیں ہو گا۔

Answer: A.केवळ निष्कर्ष क्रमांक I विधानास अनुसरून आहे
A.Only Conclusion I follows
A.صرف نتیجہ I لاگو ہو گا۔

117 सूचना: खालील प्रश्नांमध्ये दिलेल्या पर्यायांमधून संबंधित अक्षर/शब्द/संख्या निवडा.

PLEASURE : 64 : : RIGHT : ?

DIRECTIONS: In the following question, select the related letter/word/number from the given alternatives.

PLEASURE : 64 : : RIGHT : ?

سمت: مندرجہ ذیل سوال میں، دیے گئے متبادل سے متعلقہ حرف/لفظ/نمبر منتخب کریں۔

PLEASURE : 64 : : RIGHT : ?

A.25
A.25
A.25

B.36
B.36
B.36

C.16
C.16
C.16

D.49
D.49
D.49

Answer: A.25
A.25
A.25

118 जेव्हा मैदानावर तुमच्या विद्यार्थ्यास भटक्या कुत्र्याने चावल्यास, आपण हे करणार-

When your student is bitten by a stray dog on games field, you do—

جب آپ کے طالب علم کو کھیل کے میدان میں ایک آوارہ کتے نے کاٹ لیا ہے —

A.त्याच्या पालकास कळवणार व लगेचच प्रथमोपचार देणार
A.Inform his parents and impart first-aid immediately
A.اس کے والدین کو مطلع کریں اور فوری طور پر ابتدائی طبی امداد کا بندوبست کریں

B.जखमेला स्वच्छ पाण्याने धुवून काढणार आणि तशीच उघडी सोडणार
B.Washing the wound with clean water and leave it open
B.صاف پانی کے ساتھ زخم دھوکر اسے کھلا چھوڑ دیں

C.रेबीजच्या लसीकरणासाठी शाळेकडून मदत मागणार
C.Ask financial help from school for rabies vaccination
C.ریبیز ویکسین کے لئے اسکول سے مالی مدد مانگیں

D.त्याच्या उपचारात वैयक्तिक मदत करणार
D.Giving personal assistance in his treatment.
D.اس کے علاج میں ذاتی تعاون کرنا.

Answer: A.त्याच्या पालकास कळवणार व लगेचच प्रथमोपचार देणार
A.Inform his parents and impart first-aid immediately
A.اس کے والدین کو مطلع کریں اور فوری طور پر ابتدائی طبی امداد کا بندوبست کریں

119 लंबकाच्या दोलनाची वेळ ही त्याच्या लांबीच्या वर्गमूळानुसार बदलते. जर 40 सेंमी लांबीच्या लंबकाचे सेकंदामध्ये एकदा दोलन होत असेल, तर 2.5 सेकंदामध्ये एकदा दोलन होणाऱ्या लंबकाची लांबी काढा.

The time of oscillation of a pendulum varies as the square root of its length. If a pendulum of length 40 cm oscillates once in a second, then the length of the pendulum oscillating once in 2.5 seconds is:

ایک پنڈولم کے تسلسل کا وقت اس کی لمبائی کے مربع جذر کے طور پر بدلتا ہے۔ اگر لمبائی 40 سینٹی میٹر لمبائی والا پنڈولم ایک سیکنڈ میں ایک حرکت کرے تو پھر 2.5 سیکنڈ میں پنڈولم کے تسلسل کی لمبائی یہ ہے

A.175 सेंमी
A.175 cm
A.175 سینٹی میٹر

B.200 सेंमी
B.200 cm
B.200 سینٹی میٹر

C.225 सेंमी
C.225 cm
C.225 سینٹی میٹر

D.250 सेंमी
D.250 cm
D.250 سینٹی میٹر

Answer: D.250 सेंमी
D.250 cm
D.250 سینٹی میٹر

120 **सूचना:** खालील प्रश्नात, दिलेल्या पर्यायांमधून नातेसंबंध सांगणारी आकृती निवडा.

DIRECTIONS: In the question below, select the related figure from the given alternatives.

ہدایات: نیچے دیئے گئے سوال میں، دیئے گئے متبادلات میں سے متعلق متبادل چنئے۔

प्रश्न आकृती

Problem Figures

اصل شکل

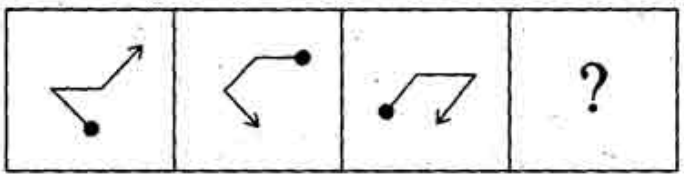

उत्तरासाठी पर्यायी आकृत्या

Answer Figure

جوابی شکل

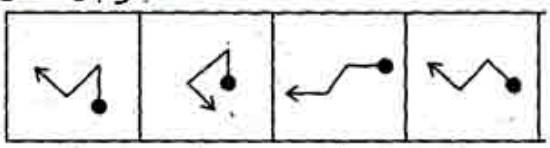

A. (A)

B. (B)

C. (C)

D. (D)

Answer: A. (A)

121 Out of the four alternatives, choose the one which can be substituted for the given words/sentence.
A physician skilled in the diagnosis and treatment of disease of the nervous system

A.Neurologist

B.Paediatrician

C.Gynaecologist

D.Orthopaedic

Answer: A.Neurologist

122

सूचना: खालील प्रश्नात एकाच फाशाच्या चार अवस्था दाखविल्या आहेत. प्रश्नात विचारलेल्या चिन्हाच्या विरुद्ध बाजूला कोणते चिन्ह असेल?

DIRECTIONS: In the following questions four positions of the same dice are shown. Select the symbol opposite to the symbol as asked in the question.

ہدایات: نیچے کے سوالوں میں، ایک ہی پاسہ کی چار حالتیں دکھائی گئ ہیں اس علامت کو چنئے جو سوال میں پو چھی گئ علامت کے سامنے ہے۔



4 या चिन्हाच्या विरुद्ध बाजूला कोणते चिन्ह असेल?
Which symbol will be opposite to symbol 4?
کونسا نشان 4 نشان کی ضد ہوگی؟

(A) o

(B) =

(C) ✧

(D) 4

Answer: (C) ✧

123

किव्ह _____ ची राजधानी आहे –

Kiev is the capital of -

کیو راجدھانی ہے :

A.युगांडा
A.Uganda
A.یوگانڈا کی

B.सर्बिया
B.Serbia
B.سربیہ کی

C.बोलिव्हिया
C.Bolivia
C.بولیویا کی

D.युक्रेन
D.Ukraine
D.یوکرین کی

Answer: D.युक्रेन
D.Ukraine
D.یوکرین کی

124 Out of the given options, choose the one which is the correct indirect speech of the sentence given below.
Mary said to Sameer, “Do you like mangoes?”

A.Mary asked Sameer if he liked mangoes.

B.Mary asked Sameer if he like mangoes.

C.Mary asks Sameer if he has liked mangoes.

D.Mary asks Sameer if he was liking mangoes.

Answer: A.Mary asked Sameer if he liked mangoes.

125 जर आपण एखाद्या विद्यार्थ्यास मानसिक त्रास होईपर्यंत शारीरिक शिक्षा दिल्यास, तुम्ही काय कराल?

If you give the student physical punishment up to his nervous breakdown, what will you do?

اگر آپ طالب علم کو اپنے اعصابی بریک ڈاون تک جسمانی سزا دیتے ہیں، تو آپ کیا کریں گے؟

A.स्वताला माफ करण्यासाठी, देवाकडे प्रार्थना करा
A.Pray to god, to forgive you
A.خدا سے دعا کریں گے ، کہ وہ آپ کو معاف کرے

B.आपल्या मुर्खपणावर पश्चाताप करा
B.Repent over your foolishness
B.اپنی بیوقوفی پر توبہ

C.ताबडतोब वर्गातून बाहेर निघणार
C.Leaving the room immediately
C.فوری طور پر کمرہ چھوڑنا

D.स्वताची चूक कबूल करणार आणि त्याला समजवण्याचा प्रयत्न करणार
D.Accept the fault and try to control him.
D.غلطی کو قبول کریں اور اسے کنٹرول کرنے کی کوشش کریں.

Answer: D.स्वताची चूक कबूल करणार आणि त्याला समजवण्याचा प्रयत्न करणार
D.Accept the fault and try to control him.
D.غلطی کو قبول کریں اور اسے کنٹرول کرنے کی کوشش کریں.

126 सूचना: खालील प्रश्नांमध्ये दिलेल्या पर्यायांमधून संबंधित अक्षर समूह निवडा.

CMJR : RMJC :: AEBJ : ?

DIRECTIONS: In the following question, select the related group of letters from the given alternatives.

CMJR : RMJC :: AEBJ : ?

سمت: مندرجہ ذیل سوال میں، دیے گئے متبادل میں سے حروف کا متعلقہ گروپ منتخب کریں۔

CMJR : RMJC :: AEBJ : ?

A.JGMY
A.JGMY
A.JGMY

B.JMNY
B.JMNY
B.JMNY

C.JEBA
C.JEBA
C.JEBA

D.JGYN
D.JGYN
D.JGYN

Answer: C.JEBA
C.JEBA
C.JEBA

127 सूचना: खालील प्रश्नांमध्ये दिलेल्या पर्यायांमधून संबंधित अक्षर/शब्द/संख्या निवडा.

42: 56 :: 110 : ?

DIRECTIONS: In the following question, select the related letter/word/number from the given alternatives.

42: 56 :: 110 : ?

سمت: مندرجہ ذیل سوال میں، دیے گئے متبادل سے متعلقہ حرف/لفظ/نمبر منتخب کریں۔

42: 56 :: 110 : ?

A.132
A.132
A.132

B.136
B.136
B.136

C.140
C.140
C.140

D.18
D.18
D.18

Answer: A.132
A.132
A.132

128 **सूचना**: खालील प्रश्नात एकाच फाशाच्या चार अवस्था दाखविल्या आहेत. प्रश्नात विचारलेल्या चिन्हाच्या विरुद्ध बाजूला कोणते चिन्ह असेल?

DIRECTIONS: In the following questions four positions of the same dice are shown. Select the symbol opposite to the symbol as asked in the question.

ہدایات: نیچے کے سوالوں میں، ایک ہی پاسہ کی چار حالتیں دکھائی گئی ہیں اس علامت کو چنئے جو سوال میں پوچھی گئی علامت کے سامنے ہے۔

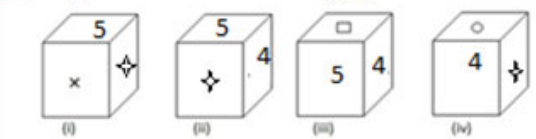

✧ या चिन्हाच्या विरुद्ध बाजूला कोणते चिन्ह असेल?

Which symbol will be opposite to symbol ✧ ?

کونسا نشان ✧ نشان کی ضد ہوگی؟

	(A) □
	(B) =
	(C) ✧
	(D) 4
Answer:	(A) □

129	1/6 × 1/4 × 6.4 × 60=? 1/6 × 1/4 × 6.4 × 60=? 1/6 × 1/4 × 6.4 × 60=?
	A.24 A.24 A.24
	B.32 B.32 B.32
	C.18 C.18 C.18
	D.यांपैकी कोणतेही नाही. D.None of these D.ان میں سے کوئی نہیں
Answer:	D.यांपैकी कोणतेही नाही. D.None of these D.ان میں سے کوئی نہیں

130 जर आपल्या वर्गात हातापायाने अपंग असलेली मुलगी शिकत आहे जिचे उजवे हात कोपरापासून नसल्यास, आपण तिला शिक्षणास कसे प्रोत्साहित करणार?

If an orthopedically handicapped girl student is studying in your class whose right hand is amputated from elbow, how would you encourage her for study?

اگر ایک اورتھروپیڈک معذور لڑکی طالبہ آپ کی کلاس میں پڑھ رہی ہے، جس کے دائیں ہاتھ کو کہنی سے باندھا جاتا ہے، تو آپ اسے مطالعہ کے لئے کیسے حوصلہ افزائی کرسکتے ہیں؟

A.आपण हळूच तिच्यावर हसता
A.You silently laugh at her
A.آپ خاموشی سے اس پر ہنستے ہیں

B.आपण तिचा आत्म-विश्वास आणि मनोधैर्य विकसित करणार
B.You develop her self-confidence and high morale
B.آپ اس کی خود اعتمادی اور اعلی حوصلہ افزائی کو فروغ دیتے ہیں

C.आपण तिला देवाची क्रूर निर्मिती म्हणून समजणार
C.You treat her as a cruel creation of god
C.آپ اسے خدا کی ظالمانہ تخلیق کے طور پر پیش کرتے ہیں

D.आपण अगदी सौम्य आणि सहानभूतीने वागाल
D.You behave gently and sympathetically.
D.آپ نرمی اور ہمدردی سے پیش آتے ہیں.

Answer: B.आपण तिचा आत्म-विश्वास आणि मनोधैर्य विकसित करणार
B.You develop her self-confidence and high morale
B.آپ اس کی خود اعتمادی اور اعلی حوصلہ افزائی کو فروغ دیتے ہیں

131 Fill in the blank with the correct article.
They danced to _____beat of the drums

A.the

B.a

C.an

D.No article required

Answer: A.the

132	बेकिंगसोड्याचे रासायनिक सुत्र आहे: Chemical formula of Baking Soda: بیکنگ سوڈا کا کیمیکل فارمولا ہے:
	A.Na_2CO_3 A.Na_2CO_3 A.Na_2CO_3
	B.Na_2SO_4 B.Na_2SO_4 B.Na_2SO_4
	C.$NaHCO_3$ C.$NaHCO_3$ C.$NaHCO_3$
	D.$NaNO_3$ D.$NaNO_3$ D.$NaNO_3$
Answer:	C.$NaHCO_3$ C.$NaHCO_3$ C.$NaHCO_3$

133	A sentence with an underlined idiomatic expression is given. What is the meaning of the idiomatic expression ‘jump the gun’ in the sentence given below? They've only just met - isn't it <u>jumping the gun</u> to be talking about marriage already?
	A.To do something very soon, especially without thinking carefully about it
	B.To take a lot of long time in doing something
	C.To consult a lot of people before actually doing a thing
	D.None of the above
Answer:	A.To do something very soon, especially without thinking carefully about it

134

$$\frac{(4)^2 - (7)^2}{4 - 7} = ?$$

A. 11

B. 8

C. 6

D. 4

Answer: A. 11

135

सूचना: दिलेल्या चारांपैकी वेगळी (असंबद्ध) असणारी आकृती शोधून काढा.

DIRECTIONS: Choose the odd figure from the given four figures.

ہدایات: دیئے گئے اختیارات میں صحیح شکل کا انتخاب کر کے سیریز کو مکمل کیجیئے۔

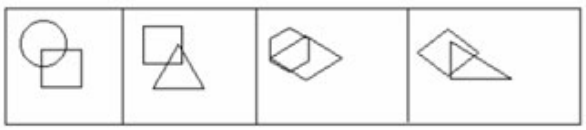

A B C D

A. (A)

B. (B)

C. (C)

D. (D)

Answer: C. (C)

136 सूचना: खाली दिलेल्या प्रश्नांमध्ये प्रत्येकी तीन विधानांचे चार गट आहेत. प्रत्येक समूहातील विधाने काळजीपूर्वक वाचा आणि तिसरे विधान तर्कशुद्धपणे पहिल्या दोन विधानांचे अनुसरण करणारा(रे) गट ओळखा.
(a) सर्व पुस्तके प्रती असतात. सर्व प्रती कागद असतात. सर्व पुस्तके कागद असतात.
(b) सर्व क्युब्स(घन) चौकोन असतात. सर्व क्युब्स(घन) त्रिकोण असतात. सर्व त्रिकोण चौकोन असतात.
(c) सर्व गायक नर्तक असतात. सर्व नर्तक वादक असतात. सर्व वादक गायक असतात.
(d) कोणताही कोंबडा कोंबडी नसते. सर्व कोंबड्या कोंबड्यांची पिल्ले असतात. कोणतीही कोंबडी कोंबडीचे पिल्लू नसते.

DIRECTION: The questions given below have four groups of three statements each. Read the statements in each group carefully and identify the group/groups where the third statement logically follows the first two statements in the group.

(a) All books are copies. All copies are papers. All books are papers.
(b) All cubes are squares. All cubes are triangles. All triangles are squares.
(c) All singers are dancers. All dancers are musicians. All musicians are singers.
(d) No cock is hen. All hens are chickens. No hen is chicken.

ہدایت: ذیل میں دیے گئے سوالات کے تین بیانات میں سے ہر ایک کے چار گروپ ہیں۔ ہر گروپ میں بیانات کو دھیان سے پڑھیں اور اس گروپ/گروپس کی شناخت کریں جہاں تیسرا بیان منطقی طور پر گروپ میں پہلے دو بیانات کی پیروی کرتا ہو۔

(a) سبھی کتابیں کاپیاں ہیں۔ سبھی کاپیاں کاغذ ہیں۔ سبھی کتابیں کاغذ ہیں۔
(b) سبھی مکعب مربع ہیں۔ سبھی مکعب مثلث ہیں۔ سبھی مثلث مربع ہیں۔
(c) سبھی گلوکار ڈانسر ہیں۔ سبھی ڈانسر موسیقار ہیں۔ سبھی موسیقار گلوکار ہیں۔
(d) کوئی مرغا مرغی نہیں ہے۔ سبھی مرغیاں چکن ہیں۔ کوئی مرغی چکن نہیں ہے۔

A.केवळ d
A.Only d
A.صرف d

B.केवळ a
B.Only a
B.صرف a

C.केवळ b आणि c
C.Only b and c
C.صرف b اور c

D.केवळ a आणि d
D.Only a and d
D.صرف a اور d

Answer: B.केवळ a
B.Only a
B.صرف a

137

खालील प्रश्नात एक आकृतिबंध दाखविला आहे आणि तो कळीची आकृती म्हणून नोंदला आहे. कागदाच्या मागच्या बाजूने बघितल्यास मूळची कळीची आकृती अचूकपणे कशी दिसेल हे तुम्हाला ठरवायचे आहे.

DIRECTIONS: In the following question, a design is given, marked as key figure. You have to determine which e will be the exact view of the original key figure seen from the reverse side of the paper.

ہدایات: نیچے کے سوال میں نقش دیا گیا ہے، جس پر اہم شکل کا نشان لگا ہے آپ کو یہ طے کرنا ہے کہ اہم شکل کا قطعی منظر کاغذ کی الٹی طرف سے کونسا ہوگا؟

मुख्य आकृती
Main Figure
اصل شکل



उत्तरासाठी पर्यायी आकृत्या
Answer Figure
جوابی شکل

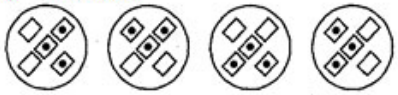

A B C D

A. (A)

B. (B)

C. (C)

D. (D)

Answer: B. (B)

138

सरळ रूप द्या:
9936942 – 836429 = ?

Simplify:
9936942 – 836429 = ?

آسان بنائیں:
9936942 – 836429 = ?

A.9201234
A.9201234
A.9201234

B.9100513
B.9100513
B.9100513

C.9103513
C.9103513
C.9103513

D.9100623
D.9100623
D.9100623

Answer:	B.9100513 B.9100513 B.9100513

139	सूचना: दिलेल्या पर्यायांमधून वेगळे ते बाहेर काढा. DIRECTIONS: Find the odd one out from the given alternatives. سمت: دیے گئے متبادل میں سے بے جوڑ کو تلاش کرو۔
	A.दलाल A.Broker A.دلال
	B.विक्रेता B.Salesman B.سیلزمین
	C.ग्राहक C.Customer C.گاہک
	D.फेरीवाला D.Hawker D.ہاکر
Answer:	C.ग्राहक C.Customer C.گاہک

140 सूचना: प्रत्येक प्रश्नाला एक प्रमुख विधानासोबत चार विधाने आहेत ज्यांच्याखाली A, B, C आणि D असे चार विधान आहेत. क्रमवार विधानांची जोडी निवडा ज्यामध्ये प्रथम विधान दुसऱ्या विधानाला सुचवते, आणि दोन्ही विधाने तर्किकदृष्ट्या प्रमुख विधानासोबत निगडित असेल.

तो एकतर मजेदार आहे किंवा मूर्ख आहे.
A. तो मजेदार आहे.
B. तो मजेदार नाही.
C. तो मूर्ख आहे.
D. तो मूर्ख नाही.

DIRECTIONS: Each question has a main statement followed by four statements labelled A, B, C and D. Choose the ordered pair of statements, where the first statement implies the second, and the two statements are logically consistent with the main statement.

He is either funny or stupid
A.He is funny
B.He is not funny
C.He is stupid
D.He is not stupid

ہدایت: ہر سوال میں ایک جملہ ہے جسکے بعد چار جملےاے، بی،سی اور ڈی کے نام سے دئے گئے ہیں اسمیں منسلک جوڑیوں کو چنئے۔ جہاں پہلا جملہ دوسرے جملہ کی اور اشارہ کر رہا ہے اور دو جملے منطقی مرکزی بیان کے مطابق ہیں

وہ یا مزاحیہ ہے یا بے وقوف
Aوہ مزاحیہ ہے ۔
Bوہ مزاحیہ نہیں ہے ۔
Cوہ بے وقوف ہے ۔
Dوہ بے وقوف نہیں ہے ۔

A.AD
A.AD
A.AD

B.BC
B.BC
B.BC

C.BD
C.BD
C.Bd

D.AB
D.AB
D.AB

Answer: B.BC
B.BC
B.BC

141 खालीलपैकी काय सिस्टम युनिटचा भाग नाही?

Which of the following is a part of the system Unit?

مندرجہ ذیل میں سے کیا سسٹم یونٹ کا ایک حصہ ہے؟

A.मॉनिटर
A.Monitor
A.مانیٹر

B.सिपीयू
B.CPU
B.سی پی یو

C.सिडी-रॉम
C.CD-ROM
C.سی ڈی – روم

D.फलॉपी-डिस्क
D.Floppy Disk
D.فلوپی ڈسک

Answer: B.सिपीयू
B.CPU
B.سی پی یو

142 एक विद्यार्थी, जो मानसिकदृष्ट्या विकलांग आहे, तो तुम्ही घेत असलेल्या वर्गात मंद व बधिर बसू शकत नाही, जेव्हा आपण त्याला ओळखले,तेव्हा आपण काय करणार?

A student, who is mentally retarded, cannot follow your lecture and sit in a deaf and dumb manner, when you recognize him, what will you do?

ایک طالب علم، جو ذہنی طور پر پریشان ہو ہے، آپ کے لیکچر کی پیروی نہیں کر سکتا اور بہرے اور گونگے انداز میں بیٹھا ہے، جب آپ اسے پہچانتے ہیں تو آپ کیا کریں گے؟

A.आपली शिकवण अगदी सोपी करणार व त्याला अतिरिक्त वेळ देणार
A.Make your lecture very simple and spare some extra time for him
A.اپنے لیکچر کو بہت آسان بنانا اور اس کے لئے کچھ اضافی وقت لگانا

B.आपण एका व्यक्तीसाठी इतरांना बळी पडू देणार नाही
B.You do not sacrifice majority for the individual
B.آپ فرد کے لئے اکثریت کی قربانی نہیں دیتے

C.आपण अस काही करणार कि तो स्वत: वर्ग सोडून जाणार
C.You attempt in such a manner that he leaves your class
C.آپ اس طرح کا رویہ اختیار کرتے ہیں کہ وہ اپنی کلاس چھوڑ دیں

D.आपण त्याला मुळीच मदत करणार नाही.
D.You do not support him at all.
D.آپ اس کی مدد نہیں کرتے.

Answer: A.आपली शिकवण अगदी सोपी करणार व त्याला अतिरिक्त वेळ देणार
A.Make your lecture very simple and spare some extra time for him
A.اپنے لیکچر کو بہت آسان بنانا اور اس کے لئے کچھ اضافی وقت لگانا

143 DIRECTIONS: A sentence with an underlined phrasal verb is given below. Out of the four options, choose the one which can be substituted for the given phrasal Verb.
Lay out the table for dinner.

A.Destruct

B.Bake

C.Arrange

D.Ignite

Answer: C.Arrange

144 अनुपालन ओळख आणि आंतरीकरणाच्या स्वरूपातील सामाजिक प्रभाव यांनी सांगितले

Social influence in the form of compliance identification and internalization was given by

شناخت کی تعمیل اور عالم کاری کی شکل میں سماجی اثرات کا تصور _____کے ذریعہ دیا گیا۔

A.शेरीफ
A.Sheriff
A.شریف

B.केलमॅन
B.Kelman
B.کلمان

C.व्यागोस्टकी
C.Vyogsky
C.ان میں سے کوئی نہیں

D.यापैकी एकही नाही
D.None of these

Answer: B.केलमॅन
B.Kelman
B.کلمان

145 $7^x = 2401$ असल्यास, x चे मूल्य आहे:

If $7^x = 2401$, then value of x is:

اگر $7^x=2401$ ہے تو x کا مان ہوگا

A.1
A.1
A.1

B.6
B.6
B.6

C.4
C.4
C.4

D.8
D.8
D.8

Answer: C.4
C.4
C.4

146 दिलेली अदलाबदल : चिन्हे – आणि +, तसेच आकडे 4 आणि 8 ; तर 16 + 4 – 8 चे मूल्य किती ?

Given interchanges: signs – and +, and numbers 4 and 8; then the value of 16 + 4 – 8 is

دیئے گئے تبادلے: علامات - اور +، اور نمبر 4 اور8؛ 16 + 4 – 8کی تعداد ہے

A.4
A.4
A.4

B.16
B.16
B.16

C.12
C.12
C.12

D.8
D.8
D.8

Answer: C.12
C.12
C.12

147 निर्देश: दिलेल्या अंक मालिकेतील चुकीची संज्ञा शोधा:

1, 2, 12, 63, 316, 1704, 10446

DIRECTIONS: Find the wrong term in the given number series:

1, 2, 12, 63, 316, 1704, 10446

ہدایت دے گئے نمبرس سرج مے غلط نمبر کھوجے

1, 2, 12, 63, 316, 1704, 10446

A.1704
A.1704
A.1704

B.316
B.316
B.316

C.63
C.63
C.63

D.12
D.12
D.12

Answer: A.1704
A.1704
A.1704

148

सूचना: खालील प्रश्नातील चार पर्यायांपैकी, तीन पर्याय असे आहेत की प्रत्येकातील 3 शब्द एकमेकांशी (A), (B), (C), (D) आणि (E) अशा दिलेल्या 5 पर्यायांपैकी कोणत्याही एका दृष्टीने एकमेकांशी संबंधित आहेत. आणि संबंध दर्शविणारा 1 पर्याय आहे जो खालील आकृतींद्वारा दाखविलेला नाही. ह्या अटीची पूर्तता करणारा संबंध म्हणजे तुमचे उत्तर असेल.

DIRECTION: Out of the four alternatives in the following question, three alternatives are such that the three words in each are related among themselves in one of the five ways represented by (A), (B), (C), (D) and (E) below. And one of the alternatives represents a relationship which is not represented by any of the figures given below. The relationship that complies this condition is your answer.

ہدایت: مندرجہ ذیل سوال میں چار متبادل میں سے، تین متبادل ایسے ہیں کہ ہر ایک میں تین الفاظ آپس میں پانچ طریقوں کے ذریعہ کی گئی ہے۔ اور ایک متبادل (A)،(B)،(C)،(D)&(E) میں سے ایک میں متعلق ہیں جن کی نمائندی مندرجہ ذیل ایسے تعلق کی نمائندگی کرتا ہے جس کی نمائندگی بچے دیے گئے کسی بھی خاکے کے ذریعہ نہیں کی جاتی ہے۔ اس شرط پر پورا اترنے والی شرط آپ کا جواب ہے

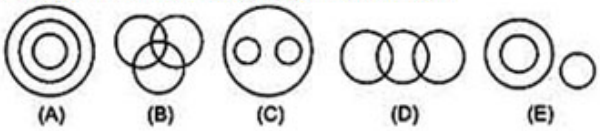

(a) सैन्य, जनरल, कर्नल / Army, General, Colonel / فوج، جنرل، کرنل

(b) मुलगा, विद्यार्थी, खेळाडू / Boy, Student, Player /لڑکا، طالب علم، کھلاڑی

(c) चित्रकार, विद्वान, टेबल/ Painter, Scholar, Table /پینٹر، اسکالر، میز

(d) पुरुष, टंकलेखक, शिपाई/ Man, Typist, Peon /دمی، ٹائیسٹ، چپراسی

A. (A)

B. (B)

C. (C)

D. (D)

Answer: C. (C)

149 विधान:
कैबिनेट मंत्री गोपनीय माहिती विकताना पकडले गेले.

कृतीचा कोर्स:
I. मंत्री यांची नागरिकता मागे घेण्यात यावी आणि त्यांना निर्वासित करावे.
II. कॅबिनेट मंत्री यांना विशेष विशेषाधिकार मिळते, म्हणून त्यांना अटक करू नये.

Statement:
A Cabinet Minister was caught selling confidential information.

Course of actions:
I. Minister’s citizenship should be revoked and he should be deported.
II. Cabinet Minister enjoys special privilege, so he should not be arrested

بیان:
کابینہ کا ایک وزیر خفیہ معلومات فروخت کرتے ہوئے پکڑا گیا۔

لائحہ عمل:
I۔ وزیر کی شہریت منسوخ کر کے اسے ملک سے باہر نکال دینا چاہیے ۔
II۔ کابینہ کے وزیر کے پاس خصوصی مراعات ہوتی ہیں اس لیے اسے گرفتار نہیں کیا جانا چاہیے ۔

A.फक्त I अनुसरून आहे
A.Only I follows
A. صرف I لاگو ہو گا۔

B.फक्त II अनुसरण करते आहे
B.Only II follows
B. صرف II لاگو ہو گا۔

C.एकतर I किंवा II अनुसरून आहे
C.Either I or II follows
C. I یا II میں سے ایک لاگو ہو گا۔

D.I किंवा II दोन्हीपैकी काहीही अनुसरण करत नाही
D.Neither I nor II follows
D. I اور II میں سے کوئی بھی لاگو نہیں ہو گا۔

Answer: D.I किंवा II दोन्हीपैकी काहीही अनुसरण करत नाही
D.Neither I nor II follows
D. I اور II میں سے کوئی بھی لاگو نہیں ہو گا۔

150 मूर्ती घडविणारा -

A.देव

	B.कुंभार
	C.सोनार
	D.मूर्तिकार
Answer:	D.मूर्तिकार

151	एक व्यक्ती आणि त्याच्या मुलाच्या वयामधील गुणोत्तर 5:2 आहे. जर त्यांच्या वयाचा गुणाका 1000 वर्षांचे असेल तर 10 वर्षांनंतर वडीलांचे वय काय असेल? The ratio of the ages of a man and his son is 5 :2. If the product of their ages is 1000 years then what will be the age of the father 10 years hence? آدمی اور اس کے بیٹے کی عمرو ں کا تناسب 5:2 ہے۔اگر اُن کی عمروں کا حاصل ضرب 1000 سال ہے۔ تب والد کی عمر 10 سال بعد کیا ہو گی؟
	A.50 वर्षे A.50 years A.50 سال
	B.60 वर्षे B.60 years B.60 سال
	C.80 वर्षे C.80 years C.80 سال
	D.100 वर्षे D.100 years D.100 سال
Answer:	B.60 वर्षे B.60 years B.60 سال

152

सूचना खालील आकृतीचे प्रतिबिंब शोधून काढा.

DIRECTIONS: Find the mirror image of the figure given below.

ہدایات: نیچے دیئے گئے شکل کی آئینہ معکوس شکل کیا ہوگی۔

मुख्य आकृती
Main Figure
اصل شکل

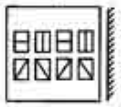

उत्तरासाठी पर्यायी आकृत्या
Answer Figure
جوابی شکل

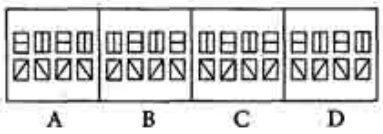

A. (A)

B. (B)

C. (C)

D. (D)

Answer: B. (B)

153 सूचना: या प्रत्येक प्रश्नांमध्ये तुम्हाला A आणि B अशी दोन विधाने दिलेली आहे आणि I आणि IIअसे दोन निष्कर्ष दिलेले आहेत. सामान्यपणे माहीत असलेल्या तथ्यांशी जुळत नसले तरी खालील दोन विधाने बरोबर आहेत असे समजा. खालीलपैकी कोणते निष्कर्ष दिलेल्या वाक्यांना संपूर्णपणे लागू आहे ते ठरवा.
निवेदन:
A: सर्व शेळ्या पोपट आहेत.
B: सर्व पोपट कावळे आहेत.
निष्कर्ष:
I: सर्व कावळे शेळ्या आहेत.
II: सर्व शेळ्या कावळे आहेत.

DIRECTION: In each of these questions, you are given two statements A and B followed by two conclusions (I) and (II). You have to take the two statements to be true even if they seem to be at variance from commonly known facts. You are to decide which of the given conclusions definitely follows from the given statements.

Statements:
A: All goats are parrots.
B: All parrots are crows.

Conclusions:
I: All crows are goats.
II: All goats are crows.

ہدایت:ان سوالوں میں سے ہر ایک میں، آپ کو دو بیانات A اور B دیے گئے ہیں جن کے بعد دو نتائج (I) اور (II) دیے گئے ہیں۔ آپ کو دو بیانات دونوں بیانات کو درست تسلیم کرنا ہے اگرچہ وہ عام طور پر معلوم حقائق کے برعکس نظر آتے ہوں۔ آپ کو فیصلہ کرنا ہے کہ دیے گئے نتائج میں سے کون یقینی طور پر دیے گئے بیانات کی پیروی کرتا ہے۔

بیانات:
A: سبھی بکریاں طوطے ہیں۔
B: سبھی طوطے کوے ہیں۔

حل:
I: سبھی کوے بکریاں ہیں۔
II. سبھی بکریاں کوے ہیں۔

A.जर केवळ निष्कर्ष I निघत असल्यास.
A.If only conclusion I follows
A.صرف نتیجہ I پیروی کرتا ہے۔

B.जर केवळ निष्कर्ष II निघत असल्यास.
B.If only conclusion II follows
B.صرف نتیجہ II پیروی کرتا ہے۔

C.जर दोन्ही निष्कर्ष I आणि II निघत असल्यास.
C.If bath I and II follow
C.دونوں I اور II پیروی کرتے ہیں۔

D.जर दोन्ही निष्कर्ष I आणि II निघत नसल्यास.
D.If neither I nor II follows
D.نہ تو I نہ ہی II پیروی کرتا ہے۔

Answer: B.जर केवळ निष्कर्ष II निघत असल्यास.
B.If only conclusion II follows
B.صرف نتیجہ II پیروی کرتا ہے۔

154 252÷18=?

252÷18=?

252÷18=?

A.49
A.49
A.49

B.54
B.54
B.54

C.52
C.52
C.52

D.14
D.14
D.14

Answer: D.14
D.14
D.14

155 शास्त्रीय अनुकुलनाचे प्रणेते

Pioneer of classical conditioning

کلاسیکی مشروطیت کے بانی ہیں

A.स्किनर
A.Skinner
A.اسکنر

B.पाव्लोव
B.Pavlov
B.پاولوف

C.वॉटसन
C.Watson
C.واٹسن

D.थॉर्नडाईक
D.Thorndike
D.تھورنڈائک

Answer: B.पाव्लोव
B.Pavlov
B.پاولوف

156 03:56 ला मिनिट आणि तास काट्यादरम्यान कोणता कोण असेल?

What is the angle between minute and hour hand at 3:56?

3:56 بجے منٹ اور گھنٹہ کی سوئیاں کونسا زاویہ بنائیں گی؟

A.152°
A.152°
A.152°

B.228°
B.228°
B.228°

C.360°
C.360°
C.360°

D.142°
D.142°
D.142°

Answer: D.142°
D.142°
D.142°

157 40 मुलांच्या रांगेत उजव्या टोकाकडून मोहन 14 व्या क्रमांकावर आहे. डाव्या टोकावरून तो कोणत्या स्थानावर आहे ?

Mohan is fourteenth from the right end in a row of 40 boys. What is his positions from the left end?

موہن 40 لڑکوں کی کتار میں دھانے سے چودویں مقام پر ہے. بھانے اختتام سے اسکا مقام کیا ہے؟

A.(a) 25 व्या
A.25th
A.25th

B.(b) 27 व्या
B.27th
B.27th

C.(c) 24 व्या
C.24t
C.24t

D.(d) 26 व्या
D.26th
D.26th

Answer: B.(b) 27 व्या
B.27th
B.27th

158 असे दिसून येते कि आधुनिक विद्यार्थी हे त्यांच्या अभ्यासात खोड्या व अनेक शोर्ट-कटच्या नवनवीन पध्दती शोधून काढतात. आपण या प्रतिबंधक उपायांबद्दल काय विचार करता?

It appears that modern students are adopting innovative methods of flattery and short-cuts in their studies. What do you think about its remedial measures?

ایسا لگتا ہے کہ جدید طالب علم اپنی تعلیمات میں فلیٹری اور شارٹ کٹ کے جدید طریقوں کو اپناتے ہیں۔ آپ اس کے اقدامات کے بارے میں کیا سوچتے ہیں؟

A.या तरुणांचा वापर आपल्या वैयक्तिक लाभासाठी करावा
A.Use these youngsters for your personal gains
A.ذاتی مفادات کے لئے ان نوجوانوں کو استعمال کریں

B.शिक्षकांनी स्वत:ला त्यांच्या पासून वाचवायलाच हवे
B.Teacher must protect their own faces from them
B.استاد کا ان سے اپنے چہرے کی حفاظت کرنا ضروری ہے

C.शिक्षकांनी त्यांना सरळ व चांगले नागरिक बनवण्यासाठी अनुकूल प्रतिबंधात्मक उपाय योजले पाहिजेत
C.Favorable remedial measures should be implemented to make them strong and upright citizens by the teachers
C.اساتذہ کی طرف سے ان کو مضبوط اور اعلی شہری بنانے کے لئے قابل اطمینان احتیاطی تدابیر نافذ ہونی چاہئے

D.आजचा समाज हा असाच आहे यात काहीच चूक नाही
D.As it is the trend of society there is nothing wrong in it.
D.معاشرے کا رجحان یہ ہے کہ اس میں کچھ غلط نہیں ہے.

Answer: C.शिक्षकांनी त्यांना सरळ व चांगले नागरिक बनवण्यासाठी अनुकूल प्रतिबंधात्मक उपाय योजले पाहिजेत
C.Favorable remedial measures should be implemented to make them strong and upright citizens by the teachers
C.اساتذہ کی طرف سے ان کو مضبوط اور اعلی شہری بنانے کے لئے قابل اطمینان احتیاطی تدابیر نافذ ہونی چاہئے

159 खालीलपैकी कोणते फळ भारतीय उत्तपत्तीचे नाही?

Which is of non-Indian origin?

انمیں سے کونسا گیر بھارتی نثاد ہے۔

A.अंबा
A.Mango
A. آم

B.केळी
B.Banana
B. کیلا

C.नारळ
C.Coconut
C. ناریل

D.स्ट्राबेरी
D.Strawberry
D. اسٹرابیری

Answer: D.स्ट्राबेरी
D.Strawberry
D. اسٹرابیری

160 फिलोर किल्ला कुठे आहे –

The Phillaur Fort is in -

فیلاور کلا ہے :

A.अमृतसर
A.Amritsar
A.امرتسر میں

B.पटियाला
B.Patiala
B.پٹیالہ میں

C.लुधियाना
C.Ludhiana
C.لدھیانہ میں

D.चंदीगढ
D.Chandigarh
D.چندیگڑھ میں

Answer: C.लुधियाना
C.Ludhiana
C.لدھیانہ میں

161 ' जीव मेटाकुटीस येणे ' या वाक्प्रचाराचा अर्थ काय ?

A.काळजी दूर होणे

B.वैतागून जाणे

C.प्राणाइतके प्रिय असणे

D.मन घट्ट करणे

Answer: B.वैतागून जाणे

162 एखाद्या मुलाच्या कौशल्यात त्याच्या स्नायूचा वाढलेला वापर यामुळे असतो

Any increase in a child skill at using his muscle is due to

بچہ کی مہارت میں کوئی بھی اضافہ اس کے پٹھے کا استعمال کرتے ہوئے کس وجہ سے کیا جاتا ہے

A.शिकणे
A.Learning
A.سیکھنے

B.व्यायाम
B.Exercising
B.مشق کرنا

C.परिपक्वता
C.Maturation
C.مکمل نشونما

D.वरीलपैकी कोणतेही नाही
D.None of the above
D.درج بالا میں سے کوئی نہیں

Answer: C.परिपक्वता
C.Maturation
C.مکمل نشونما

163 सूचना: प्रत्येक प्रश्नाला एक प्रमुख विधानासोबत चार विधाने आहेत ज्यांच्याखाली A, B, C आणि D असे चार विधान आहेत. क्रमवार विधानांची जोडी निवडा ज्यामध्ये प्रथम विधान दुसऱ्या विधानाला सुचवते, आणि दोन्ही विधाने तर्किकदृष्ट्या प्रमुख विधानासोबत निगडित असेल.

तो एकतर धूर्त आहे किंवा भोळसट आहे.
A. तो धूर्त आहे.
B. तो भोळसट नाही.
C. तो भोळसट आहे.
D. तो चतुर नाही

DIRECTIONS: Each question has a main statement followed by four statements labelled A, B, C and D. Choose the ordered pair of statements, where the first statement implies the second, and the two statements are logically consistent with the main statement.

He is either cunning or gullible .
A. he is cunning
B. he is not gullible .
C. he is gullible .
D. He is not cunning

ہدایت: ہر سوال میں ایک جملہ ہے جسکے بعد چار جملےاے، بی،سی اور ڈی کے نام سے دئے گئے ہیں اسمیں منسلک جوڑیوں کو چنئے۔ جہاں پہلا جملہ دوسرے جملہ کی اور اشارہ کر رہا ہے اور دو جملے منطقی مرکزی بیان کے مطابق ہیں

وہ یا چالاک ہے یا بھولا
A۔ وہ چالاک ہے
B۔ وہ بھولا نہیں ہے
C۔ وہ بھولا ہے
D۔ وہ چالاک نہیں ہے

A.AC
A.AC
A.AC

B.DC
B.DC
B.DC

C.CB
C.CB
C.CB

D.AB
D.AB
D.AB

Answer: B.DC
B.DC
B.DC

164

व्यक्तीला त्याच्या पैशांमधून $12\frac{1}{2}\%$ तोटा झाला आणि बाकी राहिलेल्या रकमेतून 70% खर्च केल्यानंतर, त्याच्याकडे रु. 210 राहिले. सुरूवातीला त्याच्याकडे किती पैसे होते?

A man loses $12\frac{1}{2}$ % of his money and after spending 70% of the remainder, he is left Rs.210. How much money he initially had?

ایک آدمی کو اس کے $12\frac{1}{2}\%$ پیسے کا نقصان ہو جاتا ہے اور باقی 70% خرچ کرنے کے بعد، وہ 210 روپے چھوڑتا ہے.. اس کے پاس ابتدائی طور پر کتنے پیسے تھے؟

A. 700

B. 800

C. 900

D. 1000

Answer: B. 800

165 निर्देश: खालील शब्दांची इंग्रजी शब्दकोशानुसार मांडणी करा.
(a) Gradin
(b) Gradient
(c) Graduate
(d) Grading
(e) Gradual

DIRECTIONS: Arrange the following words according to the English dictionary.
(a) Gradin
(b) Gradient
(c) Graduate
(d) Grading
(e) Gradual

ہدایت: انگریزی لغت کے مطابق مندرجہ ذیل الفاظ کو مرتب کریں۔
Gradin (a)
Gradient (b)
Graduate (c)
Grading (d)
Gradual(e)

A.(b), (d), (c), (a), (e)
A.(b), (d), (c), (a), (e)
A.(b), (d), (c), (a), (e)

B.(b), (d), (c), (e), (a)
B.(b), (d), (c), (e), (a)
B.(b), (d), (c), (e), (a)

C.(d), (b), (c), (a), (e)
C.(d), (b), (c), (a), (e)
C.(d), (b), (c), (a), (e)

D.(b), (a), (d), (e), (c)
D.(b), (a), (d), (e), (c)
D.(b), (a), (d), (e), (c)

Answer: D.(b), (a), (d), (e), (c)
D.(b), (a), (d), (e), (c)
D.(b), (a), (d), (e), (c)

166 बंगालच्या तळाचे भुजल बहुतांशी यामुळे दुषीत झाले आहे—

Ground water in the Bengal basin is mostly contaminated by—

بنگال بیسن میں زمینی پانی کی آلودگی زیادہ تر ہے

A.क्रोमियम
A.Chromium
A. کرومیم

B.शिस
B.Lead
B. لیڈ

C.कॅडमियम
C.Cadmium
C. کیڈمیم

D.आर्सेनिक
D.Arsenic
D. سنکھیا

Answer: D.आर्सेनिक
D.Arsenic
D. سنکھیا

167 खालीलपैकी बेटांचे-राष्ट्र निवडा –

Pick an island- nation out of the following -

: انمیں سے کوئی ایک جزیرہ ملک چنئے

A.नौरू
A.Nauru
A.نئورو

B.फिजी
B.Fiji
B.فی جی

C.वरीलपैकी दोन्ही
C.Both of the above
C. دونوں

D.यांपैकी कोणतेही नाही
D.None of these
D.انمیں سے کوئی نہیں

Answer:	C.वरीलपैकी दोन्ही C.Both of the above C. دونوں

168	'वैराग्य' या शब्दाचा समानार्थी शब्द कोणता ?
	A.आसक्ती
	B.अनासक्ती
	C.भोग
	D.विलास
Answer:	B.अनासक्ती

169	**सूचना:** दिलेल्या चारांपैकी वेगळी (असंबद्ध) असणारी आकृती शोधून काढा. **DIRECTIONS:** Find the odd from the given four figures. ہدایات: دیئے گئے چار شکلوں میں سے طاق شکل کونسی ہے؟ 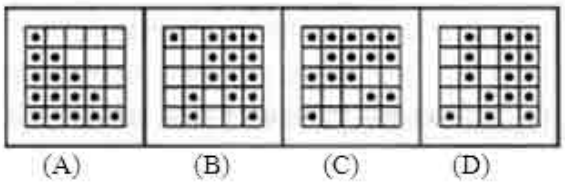 (A) (B) (C) (D)
	A. (A)
	B. (B)
	C. (C)
	D. (D)
Answer:	D. (D)

170

निर्देश: खालील प्रश्नांमध्ये प्रश्न चिन्हाच्या (?) जागी कोणते अंदाजे मूल्य यायला हवे? (तुम्ही अचूक मूल्य काढण्याचे अपेक्षित नाही).

DIRECTIONS: What approximate value should come in place of the question mark (?) in the following questions? (You are not expected to calculate the exact value)

ہدایات: مندرجہ ذیل سوال میں سوال کا نشان (؟) کی جگہ پر کون سا تخمینہ ویلیو آئے گا -
(آپ کو صحیح ویلیو نکالنے کی ضرورت نہیں ہے)

$(83.9)^2 \div 13 = ?$

A. 500

B. 540

C. 580

D. 575

Answer: B. 540

171

$$\frac{1 - \sqrt{0.04}}{4 + \sqrt{0.04}} = ?$$

A. 4/21

B. 3/21

C. 5/21

D. 7/23

Answer: A. 4/21

172 निर्देश: खालील मालिकेतील गहाळ संख्या शोधा.
1, 2, 3, 5, 7, ...,

DIRECTION: Find the missing number in the following series.

1, 2, 3, 5, 7, ...,

ہدایات: جیل کے سرج مے گمشدہ نمبر کھوجے .

1, 2, 3, 5, 7, ...,

A.8
A.8
A.8

B.9
B.9
B.9

C.10
C.10
C.10

D.13
D.13
D.13

Answer: C.10
C.10
C.10

173 एका फोटोकडे बोट दाखवून, एकजण आपल्या मित्राला सांगतो “ती माझ्या वडिलांच्या मोठ्या मुलाची मुलगी आहे. फोटोतली ती मुलगी आणि त्या व्यक्तिचे नाते काय”?

Pointing to a photograph, a person tells his friend ‘she is the daughter of the elder son of my father.’ How is the girl in the photograph related to person?

تصویر کی طرف اشارہ کرکے، آدمی نے دوست سے کہا ' یے میرے باپ کے بڑے بیٹے کی بیٹی ہے. تصویر میں لڑکی کا آدمی سے کیا رشتہ تھا؟

A.आत्या
A.Paternal Aunt
A.بھوا

B.मावशी
B.Maternal Aunt
B.خالا

C.बहीण
C.Sister
C.بہن

D.चुलत बहीण
D.Niece
D.بھانجی

Answer: D.चुलत बहीण
D.Niece
D.بھانجی

174 सूचना: खालील प्रश्नांमध्ये दिलेल्या पर्यायांमधून संबंधित अक्षर/शब्द/संख्या निवडा.

दिलेला संच : (8,27,64)

DIRECTIONS: In the following question, select the related letter/word/number from the given alternatives.

Given set : (8,27,64)

سمت: مندرجہ ذیل سوال میں، دیے گئے متبادل سے متعلقہ حرف/لفظ/نمبر منتخب کریں۔

(دیا گیا سیٹ: (8,27,64

A.(160, 40, 10)
A.(160, 40, 10)
A.(160, 40, 10)

B.(125, 216, 343)
B.(125, 216, 343)
B.(125, 216, 343)

C.(80, 20, 5)
C.(80, 20, 5)
C.(80, 20, 5)

D.(64, 32, 8)
D.(64, 32, 8)
D.(64, 32, 8)

Answer: B.(125, 216, 343)
B.(125, 216, 343)
B.(125, 216, 343)

175

सूचना: खालील प्रश्नात कागदाच्या एक तुकड्याला (चौकोनी / गोलाकार / त्रिकोणी) घड्या घातल्या आहेत व भोके पाडली आहेत. हा कागद उलगडल्यावर प्रश्नातील आकृतीप्रमाणे दिसतो. उत्तरादाखल पर्यायांमधून अशी आकृती निवडा जी उलगडल्यावर कागदाचे स्वरूप प्रश्नात दाखविल्याप्रमाणे दिसेल.

DIRECTIONS: In the following question a sheet (square/circle/triangle) of paper is folder and punch is made. When unfolded the paper sheet looks like the question figure. See the answer figures and select the one that follows the manner in which the paper is folded and punch is made.

ہدایات: نیچے دیئے گئے سوال میں، کاغذ کی شیٹ (مثلث، مربع، دائرہ) فولڈ کرکے پنچ لگائی گئی ہے، جب بغیر فولڈ کی ہوئی کا غذ کی شیٹ سوالی شکل کی طرح دکھتی ہے، جوابی شکلوں کو دیکھ کر اسکو چنئے جو ایسی لگے کہ، کاغذ شیٹ کو فولڈ کرکے پنچ لگایا گیا ہے۔

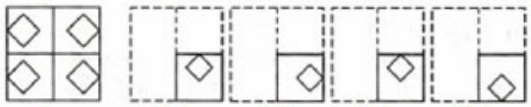

A. (A)

B. (B)

C. (C)

D. (D)

Answer: B. (B)

176 सूचना : खालील प्रत्येक प्रश्नात दोन विधाने I आणि II दिलेले आहेत. हे विधान एकतर स्वतंत्र कारण असू शकतात किंवा स्वतंत्र कारणांचे परिणाम असू शकतात. यांपैकी एक विधान इतर विधानाचा परिणाम असू शकतो. दोन्ही विधाने वाचा आणि खालीलपैकी कोणत्या उत्तराचा पर्याय या दोन्ही विधानांमधील संबंधांचे वर्णन करतो ते ठरवा.

विधान :
I. उत्पादन वाढीमुळे पर्सनल कंप्युटर (पीसी) च्या किंमती कमी झाल्या आहेत.
II. शाळेतील काही मुले कंप्युटर शिकण्यात उत्सुकता दाखवत आहेत.

DIRECTIONS: Below in each question are given two statements I and II. These statements may be either independent causes or may be effects of independent causes. One of these statements may be the effect of the other statement. Read both the statements and decide which of the following answer choice correctly depicts the relationship between these two statements.

Statements:
I. Recently the prices of the personal computers (PCs) have come down due to increased production.
II. Some school children are showing keen interest in learning computers.

ہدایات: نیچے ہر سوال میں دو بیانات I اور II آزاد وجوہات یا پھر آزاد وجوہات کے اثرات ہو سکتے ہیں۔ انہیں گئے ہیں۔ یہ بیانات یا تو
بیانات میں سے ایک بیان دوسرے کا اثر ہو سکتا ہے۔دونوں بیانات پڑھیں اور فیصلہ کریں کہ نیچے دیے گئے کس جواب کا انتخاب ان
دونوں بیانات کے در میان تعلق کو ٹھیک سے ظاہر کرتا ہے۔

بیانات:
I – حال ہی میں پیداوار میں اضافے کی وجہ سے پرسنل کمپیوٹرز (پی سی) کی قیمتوں میں کمی آئی ہے۔
II ۔ کچھ اسکول کے بچے کمپیوٹر سیکھنے میں گہری دلچسپی رکھتے ہیں۔

A.I हा परिणाम आहे आणि II हे त्याचे तात्काळ आणि प्रमुख कारण आहे;
A.I is effect and II is its immediate and principal cause;
A. بیان نمبر I اس کی فوری اور بنیادی وجہ ہے۔ II اثر ہے اور بیان نمبر

B.I हे तात्काळ आणि प्रमुख कारण आहे आणि II हा त्याचा परिणाम आहे;
B.I is the immediate and principal cause and II its effect;
B. بیان نمبر I اس کا اثر ہے۔ II فوری اور بنیادی وجہ ہے اور بیان نمبر

C.I हा परिणाम आहे परंतु II हे त्याचे तात्काळ आणि प्रमुख कारण नाही;
C.I is an effect but II is not its immediate and principal cause;
C. بیان نمبر I اس کی فوری اور بنیادی وجہ نہیں ہے۔ II اثر ہے لیکن بیان نمبر

D.II हा परिणाम आहे परंतु I हे त्याचे तात्काळ आणि प्रमुख कारण नाही
D.II is an effect but I is not its immediate and principal cause;
D. بیان نمبر II اس کی فوری اور بنیادی وجہ نہیں ہے۔ I اثر ہے لیکن بیان نمبر

Answer: D.II हा परिणाम आहे परंतु I हे त्याचे तात्काळ आणि प्रमुख कारण नाही
D.II is an effect but I is not its immediate and principal cause;
D. بیان نمبر II اس کی فوری اور بنیادی وجہ نہیں ہے۔ I اثر ہے لیکن بیان نمبر

177 अटेन्शन डेफिसीट हायपरॅक्टिविटी डिसऑर्डरमध्ये खालील लक्षणे दिसत नाहीत

Attention deficit hyperactivity disorder does not have following symptoms

توجہ کی کمی تیزرفتاری کی بیماری میں مندرجہ ذیل علامات نہیں ہوتی ہیں

A.निद्रानाश
A.Insomnia
A.انسومینیا

B.लहरीपणा
B.Mood swings
B.مزاج کی تبدیلی

C.एकाग्रतेचा अभाव
C.Lack of concentration
C.ارتکاز کی کمی

D.उलट्या
D.Vomiting
D.متلی ہونا

Answer: D.उलट्या
D.Vomiting
D.متلی ہونا

178 सूचना: हे प्रश्न खालील माहितीवर आधारित आहेत.
A, B, C, D, E, F, G, आणि H या आठ व्यक्तींपैकी प्रत्येकी एका वेगळ्या मजल्यांवर राहतो जिथे तळ मजल्याचा क्रमांक 1 आहे आणि तळ मजल्याच्या वरच्या मजल्याचा क्रमांक 2 आहे बाकी त्याचप्रमाणे आहेत आणि प्रत्येक व्यक्ती वेगळ्या उंचीची आहे परंतु त्याच क्रमाने असेल असे नाही.
फक्त तीन व्यक्ती D आणि F च्या मध्ये राहतात परंतु त्यातील दोघेही सम क्रमांकित मजल्यांवर राहत नाहीत. G पेक्षा उंच असलेल्या व्यक्तींची संख्या B पेक्षा ठेंगणे असलेल्या व्यक्तींच्या संख्ये इतकी आहे. B किंवा G दोन्हीपैकी कोणीही तिसरी सर्वात उंच किंवा सर्वात ठेंगणा व्यक्ती नाही. ते त्यांच्या उंचाच्या चढत्या क्रमवारीनुसार राहतात ज्याचा अर्थ आहे, सर्वात ठेंगणा व्यक्ती 1 क्रमांकित मजल्यावर राहतो आणि दुसरा ठेंगणा व्यक्ती मजला क्रमांकित 2 वर राहतो आणि याप्रमाणे बाकी. H हा E पेक्षा उंच आहे आणि B च्या तीन मजले खाली राहतो. A हा B पेक्षा ठेंगणा आहे परंतु D च्या बाजूला रहात नाही.
खालील पाचपैकी चार एका विशिष्ट प्रकारे समान आहेत आणि त्यामुळे एक गट तयार होतो. त्या समूहाचे कोण सदस्य नाही ते शोधा?

DIRECTIONS: These questions are based on the following information.
Each one of eight persons A, B, C, D, E, F, G, and H – lives on a different floor of which the ground floor is numbered 1 and the floor above the ground floor is numbered 2 and so on and each one is of different height but not necessarily in the same order.
Only three persons live between D and F but neither of them lives on the even-numbered floor. The number of persons taller than G is equal to the number of persons shorter than B. Neither B nor G is either the third tallest or the shortest person. They live according to the ascending order of their heights which means the shortest person lives on the floor numbered 1 and the second shortest person lives on the floor numbered 2 and so on. H is taller than E and lives three floors below B. A is shorter than B but does not live adjacent to D.
Four of the following five are alike in a certain way and hence form a group. Find the one which does not belong to that group.

ہدایات: یہ سوالات مندرجہ ذیل معلومات پر مبنی ہیں۔
میں سے ہر ایک مختلف فلور پر رہتا ہے جس کے گراؤنڈ فلور کا نمبر 1 ہے اور گراؤنڈ سے H اور G، F، E، D، C، B، A آٹھ افراد اوپر کے فلور کا نمبر 2 اور اسی طرح آگے ہے اور ہر ایک کی اونچائی مختلف ہے لیکن اس کی ترتیب لازمی طور پر یکساں نہیں ہے۔ سے لمبے لوگوں G کے درمیان صرف تین لوگ رہتے ہیں لیکن ان میں سے کوئی بھی جفت عدد کے فلور پر نہیں رہتا ہے۔ F اور D یا تو تیسرا سب سے لمبا یا سب سے چھوٹا ہے۔ وہ اپنی G نہ ہی B سے چھوٹے لوگوں کی تعداد کے برابر ہے۔ نہ تو B کی تعداد اونچائیوں کی صعودی ترتیب کے مطابق رہتے ہیں جس کا مطلب ہے سب سے چھوٹا شخص 1 نمبر کے فلور پر رہتا ہے اور دوسرا سب سے A، B سے تین فلور نیچے رہتا ہے۔ B سے لمبا ہے اور H، E سے چھوٹا شخص 2 نمبر کے فلور پر رہتا ہے اور اسی طرح آگے۔ کے قریب میں نہیں رہتا ہے۔ D چھوٹا ہے لیکن
مندرجہ ذیل پانچ میں سے چار ایک خاص طریقے میں ایک جیسے ہیں اور اس طرح ایک گروپ کی تشکیل کرتے ہیں۔ ایسے شخص کو تلاش کریں جس کا تعلق اس گروپ سے نہیں ہے؟

A.CF
A.CF
A.CF

B.EA
B.EA
B.EA

C.FG
C.FG
C.FG

D.AH
D.AH
D.AH

Answer: D.AH
D.AH
D.AH

179 जिम कॉर्बेट राष्ट्रीय उद्यान येथे आहे –

The Jim Corbett National Park is in -

جِم کاربٹ قومی پارک ہے :

A.हिमाचल प्रदेश
A.Himachal Pradesh
A.ہماچل پردیش میں

B.उत्तराखंड
B.Uttarakhand
B.اتراکھنڈ میں

C.पंजाब
C.Punjab
C. پنجاب میں

D.यांपैकी कोणतेही नाही
D.None of these
D.انمیں سے کوئی نہیں

Answer: B.उत्तराखंड
B.Uttarakhand
B.اتراکھنڈ میں

180 Out of the given four words only one is spelt correctly. Find the word that is correctly spelt.

A.Disappoint

B.Dissapear

C.Curiousity

D.Concious

Answer: A.Disappoint

181 खालील शब्दांची चढत्या क्रमाने मांडणी करून खाली दिलेल्या प्रतिसादांमधून कोणता अर्थपूर्ण क्रम असेल?

1. पुस्तक
2. लगदा
3. इमारती लाकूड
4. जंगल
5. कागद

Which one of the given responses would be a meaningful order of the following words in ascending order?

1. Book
2. Pulp
3. Timber
4. Jungle
5. Paper

چڑھتی ہوئی ترتیب میں دیےگیے جوابات میں سے کونسا ایک مندرجہ ذیل الفاظ کی معنی خیز ترتیب ہوگی؟
1. کتاب
2. گودا
3. لکڑی
4. جنگل
5. کاغذ

A.3, 2, 5, 1, 4
A.3, 2, 5, 1, 4
A.3, 2, 5, 1, 4

B.2, 5, 1, 4, 3
B.2, 5, 1, 4, 3
B.2, 5, 1, 4, 3

C.4, 3, 2, 5, 1
C.4, 3, 2, 5, 1
C.4, 3, 2, 5, 1

D.5, 4, 3, 1, 2
D.5, 4, 3, 1, 2
D.5, 4, 3, 1, 2

Answer: C.4, 3, 2, 5, 1
C.4, 3, 2, 5, 1
C.4, 3, 2, 5, 1

182 कॅप्टन. अमरींदर सिंह हे _____ चे मुख्य मंत्री आहेत

Capt. Amrinder Singh is the Chief Minister of -

کیپٹن امرندر سنگھ وزیر اعلیٰ ہیں :

A.हरियाणा
A.Haryana
A.ہریانہ کے

B.पंजाब
B.Punjab
B.پنجاب کے

C.जम्मू आणि काश्मिर
C.Jammu & Kashmir
C.جموں کشمیر کے

D.यांपैकी कोणतेही नाही
D.None of these
D.انمیں سے کوئی نہیں

Answer:

B.पंजाब
B.Punjab
B.پنجاب کے

183 **सूचना:** दिलेल्या पर्यायांमधून श्रेणी पूर्ण करणारी योग्य आकृती निवडा.

DIRECTIONS: Complete the series by choosing right figure from the given choices.

ہدایات: دیئے گئے اختیارات میں سے صحیح شکل کو چن کر سلسلہ کو مکمل کیجیئے

Problem Figures

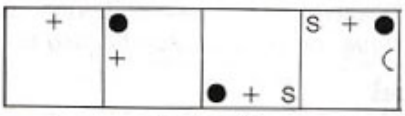

Answer Figures

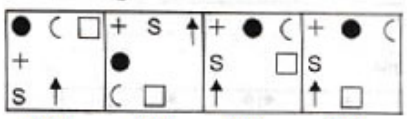

A. (A)

B. (B)

C. (C)

D. (D)

Answer: A. (A)

184 आपणास शाळेतील वाचनालयाची अतिरिक्त जबाबदारी देण्यात आली असता, आपणास असे वाटते-

If you have been given the additional responsibility of the school library, you think that—

اگر آپ کو اسکول لائبریری کی اضافی ذمہ داری دی گئی ہے تو، آپ سوچتے ہیں کہ—

A.आपण येथील विशेष कर्मचारी आहात म्हणून आपणच येथे विशेष वाचक असणार
A.You are the exclusive reader as you are the exclusive worker there
A.آپ کو خصوصی قارئین کے طور پر آپ وہاں خصوصی کارکن ہیں

B.या वाचनालयावर आणि येथील वाचन साहित्यावर विद्यार्थी व शिक्षक दोघांचा अधिकार असणार
B.It is the right of both students and teachers on the library and its reading material
B.لائبریری اور اس کی پڑھنے والے مواد پر طالب علموں اور اساتذہ دونوں کا حق ہے

C.ग्रंथालयाच्या संसाधनाचे शोषण करण्यासाठी प्राचार्याचे हे मूळ अधिकार आहे.
C.It is the exclusive right of principal to exploit the resources of library.
C.لائبریری کے وسائل کا استحصال کرنا پرنسپل کا خصوصی حق ہے.

D.आपण या वाचनालयाचे स्वत: मलिक असणार आणि आपल्या ईच्छेनुसारच पुस्तके जारी होणार.
D.You are the sole owner of the library and you may issue books only according to your will.
D.آپ لائبریری کے واحد مالک ہیں اور آپ صرف اپنی مرضی کے مطابق کتابیں جاری کر سکتے ہیں.

Answer: B.या वाचनालयावर आणि येथील वाचन साहित्यावर विद्यार्थी व शिक्षक दोघांचा अधिकार असणार
B.It is the right of both students and teachers on the library and its reading material
B.لائبریری اور اس کی پڑھنے والے مواد پر طالب علموں اور اساتذہ دونوں کا حق ہے

185 सूचना: दिलेल्या पर्यायांमधून वेगळे ते बाहेर काढा.

DIRECTIONS: Find the odd one out from the given alternatives.

سمت: دیے گئے متبادل میں سے بے جوڑ کو تلاش کرو۔

A.रोल
A.ROLE
A.ROLE

B.होल
B.HOLE
B.HOLE

C.मोल
C.MOLE
C.MOLE

D.टॉल
D.TALL
D.TALL

Answer: D.टॉल
D.TALL
D.TALL

186 मानसिक ताण _____याची एक प्रतिक्रिया आहे.

Strain is a reaction of

کشیدگی کا ایک ردعمل ہے

A.चिंता
A.Anxiety
A.پریشانی

B.निराशा
B.Frustration
B.صدمہ

C.उदासिनता
C.Depression
C.ڈپریشن

D.ताण
D.Strain
D.کشیدگی

Answer: D.ताण
D.Strain
D.کشیدگی

187 निर्देश: खालील व्यवस्था काळजीपूर्वक वाचा आणि खाली दिलेल्या प्रश्नांची उत्तरे द्या:

B 5 R 1@E K 4 F 7©DAM 2 P 3%9 H I W 8*6 U J$V Q#

उपरोक्त व्यवस्थेत अशे किती व्यंजने आहेत ज्यांचा लगेच दुसर्या व्यंजना द्वारे पाठपुरावा केला जातो पण तत्काल प्रतीकाने पुढे येत नाही?

DIRECTIONS: Study the following arrangement carefully and answer the questions given below:

B 5 R 1@E K 4 F 7©DAM 2 P 3%9 H I W 8*6 U J$V Q#

How many such consonants are there in the above arrangement each of which is immediately followed by another consonant but not immediately preceded by a symbol?

ہدایت نیچے دی گی ترتیب کو پڑھئے اور سہی جواب دیجئے

B 5 R 1@E K 4 F 7©DAM 2 P 3%9 H I W 8*6 U J$V Q#

اپری ترتیب مے ایسے کتنے کونسونانٹس ہیں جنکے پہلے دوسرا کونسونانٹ ہے مگر انکے پیچھے کوئی نشان نہیں ہے؟

A.काहीही नाही
A.None
A.کوئی نہیں

B.एक
B.One
B.ایک

C.दोन
C.Two
C. دو

D.तीन
D.Three
D.تین

Answer: A.काहीही नाही
A.None
A.کوئی نہیں

188 पुढील म्हण पूर्ण करा - '-------- पाने तीनच.' '

A.पळसाला

B.बेलाला

C.तोंडाला

D.जीवनाची

Answer: A.पळसाला

189 अनुक्रम 10, 20, 30,..... चे 9वे पद शोधा

Find the 9th term of the sequence: 10, 20, 30,.....

30 ,20 ,10 :؟ اس سرج کی نووی ٹرم کیا ہے,.....

A.60
A.60
A.60

B.90
B.90
B.90

C.44
C.44
C.44

D.48
D.48
D.48

Answer: B.90
B.90
B.90

190 चौकोनाचा कर्ण हा a सेंमी आहे. खालीलपैकी काय चौकोनाचे क्षेत्रफळ दर्शवते?

The diagonal of a square is a cm. Which of the following represents the area of the square?

ایک مربع کا وتر ایک سینٹی میٹر ہے۔ مندرجہ ذیل میں سے کون مربع کے رقبہ کی نمائندگی کرتا ہے؟

(A) 2a

(B) $\frac{a}{\sqrt{2}}$

(C) $\frac{a^2}{2}$

(D) $\frac{a^2}{4}$

Answer: (C) $\frac{a^2}{2}$

191 निर्देश: खालील प्रश्न दिलेल्या शब्दांवर आधारित आहेत.

light/ ride/ when/ price

“light” या शब्दात किती शब्दानच्या जोडी मध्ये तितकेच वर्ण आहेत जितके इंगजी वर्ण मालेतील आहेत?

DIRECTIONS: Each of the following questions is based on the following given words.

light/ ride/ when/ price

In the word ‘light’ how many pairs of words have as many letter as in English alphabet?

ہدایت جیل کے سوال دے ہے لفجونپر مشتمل ہیں

light/ ride/ when/ price

لفج میں انگریجی حرف تہجیبی کے کتنی جودیا ہیں 'light'

A.एक
A.One
A.ایک

B.दोन
B.Two
B.دو

C.तीन
C.Three
C.تین

D.चार
D.Four
D.چار

Answer: A.एक
A.One
A.ایک

192 Out of the given four words only one is not spelt correctly. Find the word that is not correctly spelt.

A.Definatelly

B.Necessary

C.Discipline

D.Consensus

Answer: A.Definatelly

193 सुमन अशोकच्या दक्षिणेला 40 मी अंतरावर आहे, प्रकाश अशोकच्या पूर्वेला 40 मी अंतरावर आहे. तर प्रकाश सुमनच्या कुठल्या दिशेला आहे?

Suman is 40m South of Ashok, Prakash is 40 m East of Ashok. Prakash is in which direction of Suman?

سمن اشوک سے 40 میٹر جنوب میں ہے، پرکاش اشوک سے 40 میٹر مشرق میں ہے۔ پرکاش سمن کی کس سمت میں ہے؟

A.दक्षिण
A.South
A.۔جنوب

B.दक्षिण-पश्चिम
B.South-West
B. ۔جنوب-مغرب

C.उत्तर-पूर्व
C.North-East
C. ۔شمال-مشرق

D.उत्तर-पूर्व.
D.North
D.۔شمال-مشرق

Answer: C.उत्तर-पूर्व
C.North-East
C. ۔شمال-مشرق

For More Info And Videos About TAIT-Exam Syllabus And Other Exam Visit My Channel
TAIT च्या 30 प्रश्नपत्रिका PDF
BADSHAHimp Available Request 9765226781 WWW.YouTube.com/BADSHAHimp
Subscribe My Channel

194 जर लागोपाठ येणाऱ्या तीन संख्यांची बेरीज 15 असेल, तर मधल्या संख्येचा वर्ग काय आहे?

If the sum of three consecutive numbers is 15, what is the square of the middle number?

اگر تین مسلسل اعداد کا مجموعہ 15 ہے تو درمیانے عدد کا مربع کیا ہوگا؟

A.16
A.16
A.16

B.25
B.25
B.25

C.36
C.36
C.36

D.निश्चित करता येत नाही
D.Cannot be determined
D. نہیں معلوم ہو سکتا

Answer: B.25
B.25
B.25

195 उत्तम परिणाम मिळण्यासाठी कंपोस्टमध्ये_____ मिसळले जातात.

_____ are added to compost to get better results.

_____ شامل کیا جاتا ہے بہتر نتائج حاصل کرنے کے لئے کھاد میں.

A.मुंग्या
A.Ants
A. چیونٹی

B.ढेकुण
B.Bugs
B. کیڑے

C.साप
C.Snakes
C. سانپ

D.किटक
D.Worms
D. کینچوا

For More Info And Videos About TAIT-Exam Syllabus And Other Exam Visit My Channel
TAIT च्या 30 प्रश्नपत्रिका PDF
BADSHAHimp Available Request 9765226781
WWW.YouTube.com/BADSHAHimp
Subscribe My Channel

Answer: D.किटक
D.Worms
D. کینچوا

196 हे खरे आहे का की नकारात्मक दृष्टिकोनापेक्षा सकारात्मक दृष्टिकोन बदलणे सोपे आहे?

Is it true that positive attitudes are easier to change than negative attitudes?

کیا یہ صحیح ہے کہ مثبت رویہ تبدیل کرنا ، منفی رویے کے مقابلے زیادہ آسان ہوتا ہے؟

A.नाही
A.No
A.نہیں

B.हे कधीही केले जाऊ शकत नाही
B.It can never be done
B. یہ کبھی نہیں ہو سکتا

C.होय
C.Yes
C.ہاں

D.खत्री नाही
D.Not sure
D.کہہ نہیں سکتا

Answer: C.होय
C.Yes
C.ہاں

197 तुमच्या वर्गात नवीन चेहरा म्हणून तुम्हाला वाईट वागणूक दिली असता तेव्हा तुम्ही त्या विद्यार्थ्यांशी कसा व्यवहार कराल?

When you are maltreated in your class as a new corner then how will you deal with the students?

جب آپ اپنی کلاس میں نئے کارنر کے طور پر خراب کرتے ہیں تو آپ طالب علموں سے کیسے نمٹنے لگے؟

A.कठीण दंडात्मक शिक्षेची उपाय योजनेमार्फत
A.Through tough punitive measures
A.سخت سزا کے اقدامات کے ذریعے

B.हकालपट्टीच्या धमक्यांमार्फत
B.Through warning of expulsion
B.اخراج کے انتباہ کے ذریعہ

For More Info And Videos About TAIT-Exam Syllabus And Other Exam Visit My Channel
TAIT च्या 30 प्रश्नपत्रिका PDF
BADSHAHimp Available Request 9765226781
WWW.YouTube.com/BADSHAHimp
Subscribe My Channel

C.आपल्या गुणवत्तेतील सुधारामार्फत
C.Through improving your qualities
C.اپنی خصوصیات کو بہتر بنانے کے ذریعے

D.तुम्ही वर्ग सोडून जाणार.
D.You leave the class.
D.آپ کلاس چھوڑ دیں گے

Answer: C.आपल्या गुणवत्तेतील सुधारामार्फत
C.Through improving your qualities
C.اپنی خصوصیات کو بہتر بنانے کے ذریعے

198 सूचना: खाली दिलेल्या विधान (A) आणि कारण (R) साठी, खालील पैकी योग्य पर्याय निवडा:

विधान (A): आपण अंतरिक्षात स्फोट ऐकू शकत नाही.
कारण (R): ध्वनी मोठ्या अंतरांवर प्रवास करु शकत नाही.

DIRECTION: For the Assertion (A) and Reason (R) given below, choose the correct alternative from the following:

Assertion (A): We cannot hear explosions in space.
Reason (R): Sound cannot travel over large distances.

ہدایت: نیچے دئیے گئے اسرشن (A) اور (R) وجہ کے لئے، مندرجہ ذیل میں سے صحیح متبادل منتخب کریں:

اسرشن (A): ہم خلا میں ہونے والے دھماکوں کو نہیں سن سکتے۔
وجہ (R): آواز بڑی فاصلوں پر سفر نہیں کرسکتی ہے۔

A.दोन्ही (A) आणि (R) सत्य आहेत आणि (R) (A) च योग्य स्पष्टीकरण आहे
A.Both (A) and (R) are true and (R) is the correct explanation of (A)
A. (A) اور (R) دونوں صحیح ہیں اور (R) (A) کی درست وضاحت ہے

B.दोन्ही (A) आणि (R) खरे आहेत, परंतु (R) (A) च योग्य स्पष्टीकरण नाही
B.Both (A) and (R) are true, but (R) is not the correct explanation of (A)
B. (A) اور (R) دونوں صحیح ہیں، لیکن (R) (A) کی درست وضاحت نہیں ہے

C.(A) सत्य आहे, परंतु (R) खोटे आहे
C.(A) is true, but (R) is false
C. (A) صحیح ہے، لیکن (R) غلط ہے

D.(A) खोटे आहे, परंतु (R) सत्य आहे
D.(A) is false, but (R) is true
D. (A) غلط ہے، لیکن (R) صحیح ہے

For More Info And Videos About TAIT-Exam Syllabus And Other Exam Visit My Channel
TAIT च्या 30 प्रश्नपत्रिका PDF
BADSHAHimp Available Request 9765226781
WWW.YouTube.com/BADSHAHimp
Subscribe My Channel

Answer: C.(A) सत्य आहे, परंतु (R) खोटे आहे
C.(A) is true, but (R) is false
C. (A) صحیح ہے، لیکن (R) غلط ہے

199 यापैकी कोणती आकृती तांदूळ, गहू आणि धान्य दर्शवते?

Which one of the following represents Rice, Wheat and Grain?

مندرجہ ذیل میں سے کون سا ایک چاول، گیہوں اور اناج کی نمایندگی کرتا ہے؟

(A) 

(B) 

(C) 

(D) 

Answer: (A) 

For More Info And Videos About TAIT-Exam Syllabus And Other Exam Visit My Channel
TAIT च्या 30 प्रश्नपत्रिका PDF
BADSHAHimp Available Request 9765226781
WWW.YouTube.com/BADSHAHimp
Subscribe My Channel

200

सूचना: दिलेल्या पर्यायांमधून श्रेणी पूर्ण करणारी योग्य आकृती निवडा.

DIRECTIONS: Complete the series by choosing right figure from the given choices.

ہدایات: دیئے گئے اختیارات میں صحیح شکل کا انتخاب کر کے سیریز کو مکمل کیجیئے۔

Problem Figures

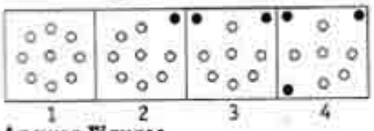

Answer Figures

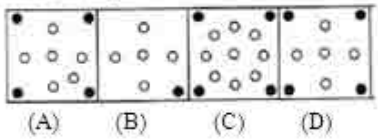

A. (A)

B. (B)

C. (C)

D. (D)

Answer: D. (D)

For More Info And Videos About TAIT-Exam Syllabus And Other Exam Visit My Channel
TAIT च्या 30 प्रश्नपत्रिका PDF
BADSHAHimp Available Request 9765226781
WWW.YouTube.com/BADSHAHimp
Subscribe My Channel

Question Paper Title : TAIT_PAPER_29

Date of Exam : 2017-12-18 12:30:00

1	' मर्जी ' या शब्दाचा विरुद्धार्थी शब्द कोणता ?
	A.इच्छा
	B.कृपा
	C.लोभ
	D.रोष
Answer:	D.रोष

2	पुढील जोडशब्द पूर्ण करा . ' किडूक ----------'
	A.किडा
	B.मिडूक
	C.बेडूक
	D.काटा
Answer:	B.मिडूक

3	Fill in the blank with the correct article. Jupiter is_____ fifth planet from the Sun and the largest in the Solar System.
	A.the
	B.a
	C.an
	D.No article required
Answer:	A.the

For More Info And Videos About TAIT-Exam Syllabus And Other Exam Visit My Channel
TAIT च्या 30 प्रश्नपत्रिका PDF
BADSHAHimp Available Request 9765226781
YouTube WWW.YouTube.com/BADSHAHimp
Subscribe My Channel

4 सूचना: अर्थपूर्ण परिच्छेद निर्माण करण्यासाठी, खाली दिलेली (P), (Q) (R), (S) आणि (T) ही पाच वाक्ये योग्य अनुक्रमाने पुनर्रचना करा; त्यांनतर खालील प्रश्नांची उत्तर द्या.

P. एका उंदराने आपली झोपमोड केल्याने सिंहाला खूप राग आला आणि तो त्या उंदराला आपल्या पंजाने मारणारच होता.
Q. उंदराने लगेच आपल्या टोकदार दातांनी जाळे कुरतडून टाकले आणि सिंहाची सुटका केली.
R. एक सिंह जंगलात गाढ झोपलेला असताना एक उंदीर त्याच्या अंगावर खेळत होता.
S. त्यानंतर लगेचच एका शिकाऱ्याच्या जाळ्यात सिंह अडकला आणि तेथून जाणाऱ्या उंदराने सिंहाला पहिले.
T. एक दिवस मी नक्की मदत कारेन, असे सांगत उंदराने माफी करण्याची विनंती सिंहाला केली. त्या विचाराने सिंहाला हसू आले आणि तो निघून गेला.

पुनर्रचना केल्यानंतर खालीलपैकी कोणते वाक्य दुसरे असेल?

DIRECTION: Rearrange the following five sentences (P), (Q), (R), (S) and (T) in the proper sequence to form a meaningful paragraph; then answer the questions given below them.
P. The lion was angry that the mouse disturbed its sleep and was about to kill it with its paw.
Q. The mouse immediately tore the net with its sharp teeth and rescued the lion.
R. A lion was fast asleep in the jungle when a mouse started running all over him.
S. Soon after that, the lion was trapped in a hunter’s net, and the little mouse was passing by and saw the lion.
T. When the mouse begged the lion to pardon it, saying it could be of help to it one day, the lion laughed at that thought and walked away.

Which of the following should be the SECOND sentence after rearrangement?

ہدایات: ان پانچ جملوں (P)، (Q)، (R)، (S) اور (T) کو با معنی پیرا بنانے کے لئے دوبارہ ترتیب دیجئے، پھر نیچے دے گئے سوالوں کے جواب دیجئے

P. شیر گسصہ تھا کہ چونچے نے اسکی نیند خراب کی اور اپنے پنجے سے اسکو مارنے والا تھا.
Q. چونھے نے جلدی سے اپنے تیز دانتوں سے جال کو کاٹا اور شیر کو بچایا.
R. شیر جنگل میں گہری نیند سو رہا تھا جب ایک چونہا اسکے اپر چلنے لگا.
S. اسکے بعد، شیر شکاری کے جال میں پھنس گیا، اور چھوٹا چونہا وہاں سے گزر رہا تھا اورشیر کو دیکھا.
T. جب چونہا شیر سے معافی مانگ رہا تھا، یہ کہکر کہ وو ایک دن اسکی مدد کریگا، شیر نے اسپر ہنسا اور بھاگ گیا.

دوبارہ ترییب دینے کے بعد کون سا جملہ دوسرا ہونا چاہیے؟

A.P
A.P
A.P

B.Q
B.Q
B.Q

C.R
C.R
C.R

For More Info And Videos About TAIT-Exam Syllabus And Other Exam Visit My Channel
TAIT च्या 30 प्रश्नपत्रिका PDF
BADSHAHimp Available Request 9765226781
WWW.YouTube.com/BADSHAHimp
Subscribe My Channel

D.S
D.S
D.S

Answer: A.P
A.P
A.P

5 सूचना : खालील प्रत्येक प्रश्नात दोन विधाने I आणि II दिलेले आहेत. हे विधान एकतर स्वतंत्र कारण असू शकतात किंवा स्वतंत्र कारणांचे परिणाम असू शकतात. यांपैकी एक विधान इतर विधानाचा परिणाम असू शकतो. दोन्ही विधाने वाचा आणि खालीलपैकी कोणत्या उत्तराचा पर्याय या दोन्ही विधानांमधील संबंधांचे वर्णन करतो ते ठरवा.

विधान :
I. महाविद्यालयाने आपल्या शुल्कात बरीच वाढ केली आहे.
II. महाविद्यालयाने आपल्या पायाभूत सुविधा सुधारीत करुन त्यांना आंतरराष्ट्रीय स्तरांसारख्या केल्या आहेत.

DIRECTIONS: Below in each question are given two statements I and II. These statements may be either independent causes or may be effects of independent causes. One of these statements may be the effect of the other statement. Read both the statements and decide which of the following answer choice correctly depicts the relationship between these two statements.

Statements:
I. The college has increased its fee considerably.
II. The college has upgraded its infrastructure and made it compatible with International Standards.

ہدایات: نیچے ہر سوال میں دو بیانات I اور II آ زاد وجوہات یا پھر آزاد وجوہات کے اثرات ہو سکتے ہیں۔ ان دیے گئے ہیں۔ یہ بیانات یا تو
بیانات میں سے ایک بیان دوسرے کا اثر ہو سکتا ہے۔دونوں بیانات پڑھیں اور فیصلہ کریں کہ نیچے دیے گئے کس جواب کا انتخاب ان
دونوں بیانات کے در میان تعلق کو ٹھیک سے ظاہر کرتا ہے۔

بیانات:
I –کالج نے اپنی فیس میں کافی اضافہ کیا ہے۔
II ۔ کالج نے اپنے بنیادی اسٹرکچر کو بہتر کیا ہے اور اسے انٹرنیشنل اسٹینڈرڈ کے مطابق بنایا ہے۔

A.विधान I कारण आहे आणि विधान II त्याचा परिणाम आहे;
A.Statement I is the cause and statement II is its effect;
A.بیان نمبر I وجہ ہے اور بیان نمبر II اس کا اثر ہے۔

B.विधान II कारण आहे आणि विधान I त्याचा परिणाम आहे;
B.Statement II is the cause and statement I is its effect;
B.بیان نمبر II وجہ ہے اور بیان نمبر I اس کا اثر ہے۔

For More Info And Videos About TAIT-Exam Syllabus And Other Exam Visit My Channel
TAIT च्या 30 प्रश्नपत्रिका PDF
BADSHAHimp Available Request 9765226781
WWW.YouTube.com/BADSHAHimp
Subscribe My Channel

C.विधान I आणि II दोन्ही स्वतंत्र कारणे आहेत;
C.Both the statements I and II are independent causes;
C.دونوں بیانات نمبر I اور نمبر II آزاد وجوہات ہیں۔

D.विधान I आणि II दोन्ही स्वतंत्र कारणांचे परिणाम आहेत;
D.Both the statements I and II are effects of independent causes;
D.دونوں بیانات نمبر I اور نمبر II آزاد وجوہات کے اثرات ہیں۔

Answer: B.विधान II कारण आहे आणि विधान I त्याचा परिणाम आहे;
B.Statement II is the cause and statement I is its effect;
B.بیان نمبر II وجہ ہے اور بیان نمبر I اس کا اثر ہے۔

6 Out of the given options, choose the one which is the correct active voice of the sentence given below.
The winning novel was chosen by a panel of famous fiction writers.

A.A panel of famous fiction writers is choosing the winning novel

B.A panel of famous fiction writers had chose the winning novel

C.The panel of famous fiction writers were choosing the winning novel

D.A panel of famous fiction writers chose the winning novel

Answer: D.A panel of famous fiction writers chose the winning novel

7 DIRECTIONS: A sentence with an underlined phrasal verb is given below. Out of the four options, choose the one which can be substituted for the given phrasal Verb.
The result will bear out his outstanding skills.

A.negate

B.deny

C.confirm

D.nullify

Answer: C.confirm

For More Info And Videos About TAIT-Exam Syllabus And Other Exam Visit My Channel
TAIT च्या 30 प्रश्नपत्रिका PDF
BADSHAHimp Available Request 9765226781
WWW.YouTube.com/BADSHAHimp
Subscribe My Channel

8 अनुक्रम 3, 6, 9,..... चे 7वे पद शोधा

Find the 7th term of the sequence: 3, 6, 9,.....

9 ,6,3 :: ؟اس سرج کی ساتوی ٹرم کیا ہے ,.....

A.21
A.21
A.21

B.16
B.16
B.16

C.41
C.41
C.41

D.72
D.72
D.72

Answer: A.21
A.21
A.21

9 दक्षिणेला तोंड करुन रामने चालायला सुरुवात केली आणि 30 मीटर चालून डावीकडे वळला, मग तो 25 मी चालला आणि डावीकडे वळून 30 मीटर चालला. तर तो त्याच्या सुरुवातीच्या ठिकाणापासून किती अंतरावर आणि कुठल्या दिशेला आहे?

Facing towards South, Ram started walking and turned left after walking 30 m, he then walked 25 m and turned left and walked 30 m. How far is he from his starting position and in which direction?

جنوب کی طرف رخ کیے ہوئے، رام نے چلنا شروع کیا اور 30 میٹر چلنے کے بعد بائیں مڑ گیا، پھر وہ 25 میٹر چلا اور بائیں مڑ گیا اور 30 میٹر چلا۔ اپنی شروعاتی پوزیشن سے وہ کتنی دور اور کس سمت میں ہے؟

A.सुरुवातीच्या ठिकाणीच
A.At the starting point only
A.شروعاتی نقطہ پر ہی ہے

B.पश्चिमेला 25 मी.
B.25 m West
B.25میٹر مغرب

C.पूर्वेला, 25 मी.
C.25 m East
C.25 میٹر مشرق

D.पूर्वेला, 30 मी.
D.30 m East
D.30 میٹر مشرق

Answer: C.पूर्वेला, 25 मी.
C.25 m East
C.25 میٹر مشرق

10 सूचना: खालील प्रश्नांमध्ये दिलेल्या पर्यायांमधून संबंधित अक्षर समूह निवडा.

Good : Dgoo : : Food : ?

DIRECTIONS: In the following question, select the related group of letters from the given alternatives.

Good : Dgoo : : Food : ?

سمت: مندرجہ ذیل سوال میں، دیے گئے متبادل میں سے حروف کا متعلقہ گروپ منتخب کریں۔

Good : Dgoo : : Food : ?

A.Fodo
A.Fodo
A.Fodo

B.Odfo
B.Odfo
B.Odfo

C.Fodd
C.Fodd
C.Fodd

D.Dfoo
D.Dfoo
D.Dfoo

Answer: D.Dfoo
D.Dfoo
D.Dfoo

For More Info And Videos About TAIT-Exam Syllabus And Other Exam Visit My Channel
TAIT च्या 30 प्रश्नपत्रिका PDF
BADSHAHimp Available Request 9765226781
WWW.YouTube.com/BADSHAHimp
Subscribe My Channel

11 खालील अटीनुसार व्याख्यान पद्धत सर्वात योग्य आहे-

Lecture method is most appropriate in the following condition —

مندرجہ ذیل حالات میں لیکچر کا مناسب ترینطریقہ ہے.

A.जेव्हा शिक्षक एखादे नवीन व अवघड विषय सुरु करतात
A.When a teacher starts a new and difficult topic
A.جب استاد ایک نیا اور مشکل موضوع شروع کرتا ہے

B.जेव्हा एखादे शिक्षक सिद्धांत्मक पैलू समजावून सांगत असते
B.When a teacher explains theoretical aspects
B.جب استاد نظریاتی پہلوؤں کی وضاحت کرتا ہے

C.जेव्हा एखादे शिक्षक एका प्रात्यक्षिकाबद्दल समजावून सांगत असते
C.When a teacher explains about a demonstration
C.جب استاد ایک ڈیمانسٹریشن کے بارے میں وضاحت کرتا ہے

D.वरीलपैकी काहीच नाही
D.None of the above
D.اوپر میں سے کوئی نہیں

Answer: D.वरीलपैकी काहीच नाही
D.None of the above
D.اوپر میں سے کوئی نہیں

12 डॉ. प्रणय रॉय हे _____ या क्षेत्राशी संबंधित आहेत –

Dr. Pranoy Roy is associated with the field of -

ڈاکٹر پرانئے رائے جڑے ہوئے ہیں۔

A.खेळ
A.Sports
A.کھیل سے

B.संगीत
B.Music
B.موسیقی سے

C.पत्रकारिता
C.Journalism
C.صحافت

D.शिक्षण
D.Education
D.تعلیم سے

Answer: C.पत्रकारिता
C.Journalism
C.صحافت

13 समान कार्य करणाऱ्या पेशींच्या गटाला म्हणतात.....

A group of cells performing similar function is known as _____

خلیات ؛ جو کی ایک ہی طرح کاکام انجام دیتے ہیں کہلاتے ہیں ۔

A.कोशिकामय
A.Cellular
A. سیلولر

B.ऊतक
B.Tissue
B. ٹشو

C.अवयव
C.Organ
C. آرگن

D.अवयव संस्था
D.Organ system
D. آرگن کا نظام

Answer: B.ऊतक
B.Tissue
B. ٹشو

14 सूचना: खालील प्रश्नांमध्ये दिलेल्या पर्यायांमधून संबंधित अक्षर/शब्द/संख्या निवडा.

पक्षी : उडणे :: साप : ?

DIRECTIONS: In the following question, select the related letter/word/number from the given alternatives.

Bird : Fly :: Snake : ?

سمت: مندرجہ ذیل سوال میں، دیے گئے متبادل سے متعلقہ حرف/لفظ/نمبر منتخب کریں۔

چڑیا : اڑنا :: سانپ : ؟

A.भित्रा
A.Timid
A.بزدل

B.खडखडाट
B.Clatter
B.کھڑکھڑانا

C.सरपटणे
C.Crawl
C.رینگنا

D.छिद्र
D.Hole
D.سوراخ

Answer: C.सरपटणे
C.Crawl
C.رینگنا

15 Out of the given four words only one is not spelt correctly. Find the word that is not correctly spelt.

A.Familar

B.Grammar

C.Grandeur

D.Grievous

Answer: A.Familar

16 खालीलपैकी कोणता वास्तविक मासा नाही?

Which one of the following is not a true fish?

مندرجہ ذیل میں سے کون ایک صحیح مچھلی نہیں ہے؟

A.सिल्वर मासा
A.Silver Fish
A.سلور مچھلی

B.सॉ मासा
B.Saw Fish
B.سا مچھلی

C.हॅमर मासा
C.Hammer Fish
C.ہیمر مچھلی

D.सकर मासा
D.Sucker Fish
D.سکر مچھلی

Answer:

A.सिल्वर मासा
A.Silver Fish
A.سلور مچھلی

17

दिलेल्या पर्यायांपैकी वेगळे ते निवडा:

Select the odd one out from the given options:

دیے گئے اختیارات میں سے بے جوڑ کو منتخب کریں:

A.TSRS
A.TSRS
A.TSRS

B.PONP
B.PONP
B.PONP

C.LKJL
C.LKJL
C.LKJL

D.HGFH
D.HGFH
D.HGFH

Answer:

A.TSRS
A.TSRS
A.TSRS

18

फासा फेकताना स्पष्ट फाशाची, ’3' संख्या मिळवण्याची संभाव्यता?

In throwing a dice a fair dice, what is the probability of getting the number ‘3’?

ایک منصفانہ ڈائس پھینکنے میں، '3' نمبر حاصل کرنے کا امکان کیا ہے؟

	A.1/3 A.1/3 A.1/3
	B.1/6 B.1/6 B.1/6
	C.1/9 C.1/9 C.1/9
	D.1/12 D.1/12 D.1/12
Answer:	B.1/6 B.1/6 B.1/6

19 सूचना: अर्थपूर्ण परिच्छेद निर्माण करण्यासाठी, खाली दिलेली (P), (Q) (R), (S) आणि (T) ही पाच वाक्ये योग्य अनुक्रमाने पुनर्रचना करा; त्यांनतर खालील प्रश्नांची उत्तर द्या.

P. एका उंदराने आपली झोपमोड केल्याने सिंहाला खूप राग आला आणि तो त्या उंदराला आपल्या पंजाने मारणारच होता.
Q. उंदराने लगेच आपल्या टोकदार दातांनी जाळे कुरतडून टाकले आणि सिंहाची सुटका केली.
R. एक सिंह जंगलात गाढ झोपलेला असताना एक उंदीर त्याच्या अंगावर खेळत होता.
S. त्यानंतर लगेचच एका शिकाऱ्याच्या जाळ्यात सिंह अडकला आणि तेथून जाणाऱ्या उंदराने सिंहाला पहिले.
T. एक दिवस मी नक्की मदत कारेन, असे सांगत उंदराने माफी करण्याची विनंती सिंहाला केली. त्या विचाराने सिंहाला हसू आले आणि तो निघून गेला.

पुनर्रचना केल्यानंतर खालीलपैकी कोणते वाक्य तिसरे असेल?

DIRECTION: Rearrange the following five sentences (P), (Q), (R), (S) and (T) in the proper sequence to form a meaningful paragraph; then answer the questions given below them.
P. The lion was angry that the mouse disturbed its sleep and was about to kill it with its paw.
Q. The mouse immediately tore the net with its sharp teeth and rescued the lion.
R. A lion was fast asleep in the jungle when a mouse started running all over him.
S. Soon after that, the lion was trapped in a hunter’s net, and the little mouse was passing by and saw the lion.
T. When the mouse begged the lion to pardon it, saying it could be of help to it one day, the lion laughed at that thought and walked away.

Which of the following should be the THIRD sentence after rearrangement?

ہدایات: ان پانچ جملوں (P)، (Q)، (R)، (S) اور (T) کو با معنی پیرا بنانے کے لئے دوبارہ ترتیب دیجئے، پھر نیچے دے گئے سوالوں کے جواب دیجئے

P. شیر گسصہ تھا کہ چونچے نے اسکی نیند خراب کی اور اپنے پنجے سے اسکو مارنے والا تھا.
Q. چونھے نے جلدی سے اپنے تیز دانتوں سے جال کو کاٹا اور شیر کو بچایا.
R. شیر جنگل میں گہری نیند سو رہا تھا جب ایک چونہا اسکے اپر چلنے لگا.
S. اسکے بعد، شیر شکاری کے جال میں پھنس گیا، اور چھوٹا چونہا وہاں سے گزر رہا تھا اورشیر کو دیکھا.
T. جب چونہا شیر سے معافی مانگ رہا تھا، یہ کہکر کہ وو ایک دن اسکی مدد کریگا، شیر نے اسپر ہنسا اور بھاگ گیا.

دوبارہ ترییب دینے کے بعد کون سا جملہ تیسرا ہونا چاہیے؟

A.T
A.T
A.T

B.P
B.P
B.P

C.Q
C.Q
C.Q

D.R
D.R
D.R

Answer: A.T
A.T
A.T

20 सूचना: अर्थपूर्ण परिच्छेद निर्माण करण्यासाठी, खाली दिलेली (P), (Q) (R), (S) आणि (T) ही पाच वाक्ये योग्य अनुक्रमाने पुनर्रचना करा; त्यांनतर खालील प्रश्नांची उत्तर द्या.

P. एका उंदराने आपली झोपमोड केल्याने सिंहाला खूप राग आला आणि तो त्या उंदराला आपल्या पंजाने मारणारच होता.
Q. उंदराने लगेच आपल्या टोकदार दातांनी जाळे कुरतडून टाकले आणि सिंहाची सुटका केली.
R. एक सिंह जंगलात गाढ झोपलेला असताना एक उंदीर त्याच्या अंगावर खेळत होता.
S. त्यानंतर लगेचच एका शिकाऱ्याच्या जाळ्यात सिंह अडकला आणि तेथून जाणाऱ्या उंदराने सिंहाला पहिले.
T. एक दिवस मी नक्की मदत करेन, असे सांगत उंदराने माफी करण्याची विनंती सिंहाला केली. त्या विचाराने सिंहाला हसू आले आणि तो निघून गेला.

पुनर्रचना केल्यानंतर खालीलपैकी कोणते वाक्य चौथे असेल?

DIRECTION: Rearrange the following five sentences (P), (Q), (R), (S) and (T) in the proper sequence to form a meaningful paragraph; then answer the questions given below them.
P. The lion was angry that the mouse disturbed its sleep and was about to kill it with its paw.
Q. The mouse immediately tore the net with its sharp teeth and rescued the lion.
R. A lion was fast asleep in the jungle when a mouse started running all over him.
S. Soon after that, the lion was trapped in a hunter’s net, and the little mouse was passing by and saw the lion.
T. When the mouse begged the lion to pardon it, saying it could be of help to it one day, the lion laughed at that thought and walked away.

Which of the following should be the FOURTH sentence after rearrangement?

ہدایات: ان پانچ جملوں (P)، (Q)، (R)، (S) اور (T) کو با معنی پیرا بنانے کے لئے دوبارہ ترتیب دیجئے، پھر نیچے دے گئے سوالوں کے جواب دیجئے

P. شیر گسصہ تھا کہ چونچے نے اسکی نیند خراب کی اور اپنے پنجے سے اسکو مارنے والا تھا.
Q. چونھے نے جلدی سے اپنے تیز دانتوں سے جال کو کاٹا اور شیر کو بچایا.
R. شیر جنگل میں گہری نیند سو رہا تھا جب ایک چونہا اسکے اپر چلنے لگا.
S. اسکے بعد، شیر شکاری کے جال میں پھنس گیا، اور چھوٹا چونہا وہاں سے گزر رہا تھا اورشیر کو دیکھا.
T. جب چونہا شیر سے معافی مانگ رہا تھا، یہ کہکر کہ وو ایک دن اسکی مدد کریگا، شیر نے اسپر ہنسا اور بھاگ گیا.

IV دوبارہ ترییب دینے کے بعد کون سا جملہ چوتھا ہونا چاہیے؟

A.S
A.S
A.S

B.Q
B.Q
B.Q

C.R
C.R
C.R

D.P
D.P
D.P

Answer: A.S
A.S
A.S

21 निर्देश: खालील प्रश्न दिलेल्या शब्दांवर आधारित आहेत.

Lay/ Editor/ Precursor/ Orthodox

जर दिलेल्या शब्दातील अक्षर हे इंग्रजी वर्णमालेप्रमाणे त्याच्या पुढल्या अक्षराने पुनर्स्थित केले असल्यास किती शब्दान मध्ये कमीत कमी एक स्वर राहिल?

DIRECTIONS: Following question is based on the given words.

Lay/ Editor/ Precursor/ Orthodox

If each of the letters in the given words is replaced by its next letter in the English alphabet then how many words having at least one vowel?

ہدایت جیل کے سوال دے ہے لفجونپر مشتمل ہیں

Lay/ Editor/ Precursor/
Orthodox

اگر ان لفجوں مے ہر حرف کو انگریجی حرف تہجیبی کے اگلے حرف سے بدلہ جائے تو صرف یک واول والے کتنے لفج ہونگے؟
?

A.एक
A.One
A.ایک

B.दोन
B.Two
B.دو

C.तीन
C.Three
C.تین

D.चार
D.Four
D.چار

Answer: B.दोन
B.Two
B.دو

22 सूचना: प्रत्येक प्रश्नाला एक प्रमुख विधानासोबत चार विधाने आहेत ज्यांच्याखाली A, B, C आणि D असे चार विधान आहेत. क्रमवार विधानांची जोडी निवडा ज्यामध्ये प्रथम विधान दुसऱ्या विधानाला सुचवते, आणि दोन्ही विधाने तर्किकदृष्ट्या प्रमुख विधानासोबत निगडित असेल.

हे गाणे कवीने किंवा गीतकाराने लिहिले आहे.
A. हे गाणे कवीने लिहिले आहे.
B. हे गाणे कवीने लिहिलेले नाही.
C. हे गाणे गीतकाराने लिहिले आहे.
D. हे गाणे गीतकाराने लिहिलेले नाही.

DIRECTIONS: Each question has a main statement followed by four statements labelled A, B, C and D. Choose the ordered pair of statements, where the first statement implies the second, and the two statements are logically consistent with the main statement.

The song is written by either the poet or the lyricist
A. The song is written by the poet
B.The song is not written by the poet
C.The song is written by the lyricist
D.The song is not written by the lyricist

ہدایت: ہر سوال میں ایک جملہ ہے جسکے بعد چار جملےاے، بی،سی اور ڈی کے نام سے دئے گئے ہیں اسمیں منسلک جوڑیوں کو چنئے۔ جہاں پہلا جملہ دوسرے جملہ کی اور اشارہ کر رہا ہے اور دو جملے منطقی مرکزی بیان کے مطابق ہیں

یہ گانا یا شاعر نے لکھا ہے یا موسیقار نے
A۔ گانا شاعر نے لکھا ہے
B۔ گانا شاعر نے نہیں لکھا
C۔ گانا موسیقار نے لکھا ہے
D۔ گانا موسیقار نے نہیں لکھا

A.BD
A.BD
A.BD

B.DA
B.DA
B.DA

C.CB
C.CB
C.CB

D.AC
D.AC
D.AC

Answer: B.DA
B.DA
B.DA

23 जर $x^2=196$ आणि $y^2=225,(x>0,y>0)$ तर $(x + y)^2$ चे मूल्य बरोबर:

If $x^2=196$ and $y^2=225,(x>0,y>0)$ then the value of $(x + y)^2$ is equal to:

اگر $x^2=196$ اور $y^2=225,(x>0,y>0)$ تو $(x + y)^2$ کی قیمت برابر ہوگی:

A.861
A.861
A.861

B.729
B.729
B.729

C.841
C.841
C.841

D.343
D.343
D.343

Answer: C.841
C.841
C.841

24	निर्देश: दिलेल्या अंक मालिकेतील चुकीची संज्ञा शोधा: 9, 15, 26, 51, 99, 193, 387 DIRECTIONS: Find the wrong term in the given number series: 9, 15, 26, 51, 99, 193, 387 ہدایت دے گئے نمبرس سرج مے غلط نمبر کھوجے 9, 15, 26, 51, 99, 193, 387
	A.26 A.26 A.26
	B.51 B.51 B.51
	C.15 C.15 C.15
	D.193 D.193 D.193
Answer:	D.193 D.193 D.193
25	$2x^2+ 3x – 20 = 0$ या वर्गसमीकरणाची मुळे आहेत: The roots of the quadratic equation $2x^2+ 3x – 20 = 0$ are: $x^2 + 3x – 20 = 0$ مربع مساوات کے روٹ 2 ہیں:
	A.-4, 5/2 A.-4, 5/2 A.-4, 5/2
	B.4, -5/2 B.4, -5/2 B.4, -5/2

C.8, -5
C.8, -5
C.8, -5

D.-8, 5
D.-8, 5
D.-8, 5

Answer: A.-4, 5/2
A.-4, 5/2
A.-4, 5/2

26 ने शिक्षण प्रभावित आहे-

Teaching is being affected by—

تعلیم --- سےمتاثر ہوتی ہے-

A.वर्ग
A.Class-room
A.کلاس روم

B.शाळा
B.School
B.اسکول

C.समाज
C.Society
C.سوسائٹی

D.वरील पैकी सर्व
D.All of the above
D.مذکورہ تمام

Answer: D.वरील पैकी सर्व
D.All of the above
D.مذکورہ تمام

27 खालीलपैकी कोणत्या जीवनसत्वामध्ये धातू अणू असतात?

Which of the following vitamins contains metal atoms?

مندرجہ ذیل وٹامن میں سے کس وٹامن میں دھاتی ایٹم ہوتے ہیں؟

A.जीवनसत्व –B12
A.Vitamin –B12
A.12 وٹامن بی

B.जीवनसत्व –A
B.Vitamin –A
B.وٹامن اے

C.जीवनसत्व –B6
C.Vitamin –B6
C.6 وٹامن بی

D.जीवनसत्व –B2
D.Vitamin –B2
D.2 وٹامن بی

Answer: A.जीवनसत्व –B12
A.Vitamin –B12
A.12 وٹامن بی

28 भारतातील कोणत्या शहराला भारताची गार्डन सिटी म्हणतात?

Which Indian city is known as the garden city of India?

کونسا بھارتی شہر 'باغوں کے شہر' کے نام سے جانا جاتا ہے ؟

A.जम्मु आणि काश्मिर
A.Jammu and Kashmir
A. جموں و کشمیر

B.गुजराथ
B.Gujarat
B. گجرات

C.बेंगलूरू
C.Bengaluru
C. بنگلورو

D.कोलकता
D.Kolkata
D. کولکتہ

Answer: C.बेंगलूरू
C.Bengaluru
C. بنگلورو

29 सूचना: हे प्रश्न खालील माहितीवर आधारित आहेत.
सहा लोक P, Q, R, S, T, आणि U सात मजली इमारतीमध्ये राहतात, पण ते याच क्रमात राहतात असे नाही.
तळमजल्याला पहिला मजला समजले जाते आणि त्या वरच्या मजल्यांना अनुक्रमे दुसरा, तिसरा .... असे समजले जाते.
इमारतीतला एक मजला रिकामा आहे. R आणि T यांच्यामध्ये दोन लोक राहतात, पण त्यांच्यापैकी कोणीही सर्वात वरच्या किंवा तळमजल्यावर राहत नाही. S Pच्या दोन मजले वर राहतो, P चा मजला रिकाम्या मजल्याच्या खालचा मजला नाही. U सम संख्या असलेल्या मजल्यावर राहतो पण Qच्या मजल्याच्या खाली राहत नाही. Uच्या खालच्या मजल्यावर राहणा-या व्यक्तींची संख्या Pच्या वर राहणा-या व्यक्तींच्या संख्येएवढी आहे. Qच्या वरचा मजला रिकामा आहे, पण तो Qच्या मजल्याला लागून नाही.
जर T, Uच्या वर राहतो, तर Rच्या मजल्याच्या लगेच खाली कोण राहतो?

DIRECTIONS: These questions are based on the following information.
Six persons P, Q, R, S, T, and U are living in a seven-storeyed building but not necessarily in the same order. Ground floor is considered the first floor and the floor above the ground floor is considered the second floor and so on. One floor is vacant in the given building. Two persons are living between R and T and neither of them lives either on the top floor or on the bottom floor. S lives two floors above P whose floor is not below the vacant floor. U lives on an even-numbered floor but not below Q's floor. The number of persons living below U's floor is equal to the number of persons living above P's floor. The vacant floor is above Q's floor but not adjacent to Q's floor.
If T lives above U, then who lives immediately below R's floor?

ہدایات: یہ سوالات مندرجہ ذیل معلومات پر مبنی ہیں۔
ایک سات منزلہ عمارت میں رہتے ہیں لیکن لازمی طور پر یکساں ترتیب میں نہیں۔ گراؤنڈ فلور V اور P، Q، R، S، T، U سات افراد کو پہلا فلور مانا جاتا ہے اور گراؤنڈ فلور سے اوپر دوسرا فلور مانا جاتا ہے اور اسی طرح آگے۔ دی گئی عمارت میں ایک فلور خالی کے درمیان دو لوگ رہتے ہیں اور ان میں سے کوئی بھی سب سے اوپر کے فلور یا سب سے نچلے فلور پر نہیں رہتا ہے۔ T اور R ہے۔ S، P کے فلور Q ایک جفت عدد کے فلور پر رہتا ہے لیکن U سے دو فلور اوپر رہتا ہے جس کا فلور خالی فلور کے نیچے نہیں ہے۔ کے فلور سے اوپر رہنے والے لوگوں کی تعداد کے برابر ہے۔ P کے فلور سے نیچے رہنے والے لوگوں کی تعداد U کے نیچے نہیں۔ کے فلور سے ملا ہوا نہیں ہے۔ Q کے فلور کے اوپر ہے لیکن Q خالی فلور
اگر T، U کے فلور کے فوری طور پر نیچے کون رہتا ہے؟ R کے اوپر رہتا ہے، تو

A.P
A.P
A.P

B.S
B.S
B.S

C.U
C.U
C.U

D.Q
D.Q
D.Q

Answer: D.Q
D.Q
D.Q

30

सूचना: दिलेल्या पर्यायांमधून श्रेणी पूर्ण करणारी योग्य आकृती निवडा.

DIRECTIONS: Complete the series by choosing right figure from the given choices.

ہدایات: دئے گئے انتخابات میں سے صحیح تصویر کو منتخب کرکے سلسلہ مکمل کریں۔

Problem Figures

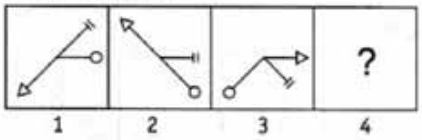

Answer Figures

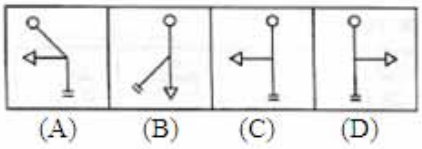

A. (A)

B. (B)

C. (C)

D. (D)

Answer: C. (C)

31 खालीलपैकी शुद्ध वाक्य कोणते ?

A.संध्या खूप अभ्यास करते.

B.सर्व मित्र खूप अभ्यास करते.

C.मुलं खूप अभ्यास करते.

D.दीपक खूप अभ्यास करते.

Answer: A.संध्या खूप अभ्यास करते.

32 मी माझ्या भावाच्या वाढदिवसानंतर 129 दिवसांनी मुंबईला जाईल. जर माझ्या भावाचा वाढदिवस रविवारच्या 3 दिवस आधी येत असेल. मी मुंबईला कधी जाईल?

I shall go Mumbai after 129 days of my brothers' birthday. If my brother birth day falls 3 days earlier to Sunday. When shall I go to Mumbai?

میں اپنے بھائی کے یوم پیدائش سے 129 دن بعد ممبئ جاوں گا۔ اگر میرے بھائی کا یوم پیدائش اتوار سے 3 دن پہلے پڑ رہا ہو تو میں ممبئ کب جاوں گا؟

A.शनिवार
A.Saturday
A.سنیچر

B.रविवार
B.Sunday
B.اتوار

C.मंगळवार
C.Tuesday
C.منگل

D.बुधवार
D.Wednesday
D.بدھ

Answer: B.रविवार
B.Sunday
B.اتوار

33 अनन्याचा पगार 20% नी वाढला, आणि मग तो 20% नी कमी केला. वेतनामधील बदल हा आहे:

Salary of Ananya is first increased by 20%, and then it is decreased by 20%. Change in his salary is:

انینیا کی تنخواہ سب سے پہلے 20% تک بڑھتی ہے، اور اس کے بعد یہ 20% تک کم ہوتی ہے. اس کی تنخواہ میں تبدیلی ہے:

A.4% घट
A.4% decrease
A. 4%کمی

B.4% वाढ
B.4% increase
B.4%اضافہ

C.8% घट
C.8% decrease
C.8 % کمی

D.वाढ नाही घट नाही
D.Neither decrease nor increase
D. نہ کمی نہ اضافہ

Answer: A.4% घट
A.4% decrease
A. 4%کمی

34 पुढील म्हण पूर्ण करा - ' पुढे पाठ मागे -------- '

A.पोट

B.छाती

C.सपाट

D.कपाट

Answer: C.सपाट

35 खालीलपैकी कोणती भारताची सर्वात जलद प्रकार गाडी आहे?

Which of the following is the fastest train-type of India?

بھارت کی سب سے تیز ٹرین مندرجہ ذیل میں سے کون سی ہے؟

A.राजधानी एक्सप्रेस
A.Rajdhani Express
A. راجدھانی ایکسپریس

B.शताब्दी एक्सप्रेस
B.Shatabdi Express
B. شتابدی ایکسپریس

C.राजधानी आणि शताब्दी दोन्ही एक्सप्रेस
C.Both Rajdhani and Shatabdi Express
C. راجدھانی ایکسپریس اور شتابدی ایکسپریس دونوں

D.गरिब रथ
D.Garib Rath
D. جن شتابدی ایکسپریس

Answer: C.राजधानी आणि शताब्दी दोन्ही एक्सप्रेस
C.Both Rajdhani and Shatabdi Express
C. راجدھانی ایکسپریس اور شتابدی ایکسپریس دونوں

36 सूचना: हे प्रश्न खालील माहितीवर आधारित आहेत.
सहा लोक P, Q, R, S, T, आणि U सात मजली इमारतीमध्ये राहतात, पण ते याच क्रमात राहतात असे नाही.
तळमजल्याला पहिला मजला समजले जाते आणि त्या वरच्या मजल्यांना अनुक्रमे दुसरा, तिसरा .... असे समजले जाते.
इमारतीतला एक मजला रिकामा आहे. R आणि T यांच्यामध्ये दोन लोक राहतात, पण त्यांच्यापैकी कोणीही सर्वात वरच्या किंवा तळमजल्यावर राहत नाही. S Pच्या दोन मजले वर राहतो, P चा मजला रिकाम्या मजल्याच्या खालचा मजला नाही. U सम संख्या असलेल्या मजल्यावर राहतो पण Qच्या मजल्याच्या खाली राहत नाही. Uच्या खालच्या मजल्यावर राहणा-या व्यक्तींची संख्या Pच्या वर राहणा-या व्यक्तींच्या संख्येएवढी आहे. Qच्या वरचा मजला रिकामा आहे, पण तो Qच्या मजल्याला लागून नाही.
खालीलपैकी कोणत्या व्यक्ती-मजल्याची जोडी बरोबर आहे.

DIRECTIONS: These questions are based on the following information.
Six persons P, Q, R, S, T, and U are living in a seven-storeyed building but not necessarily in the same order. Ground floor is considered the first floor and the floor above the ground floor is considered the second floor and so on. One floor is vacant in the given building. Two persons are living between R and T and neither of them lives either on the top floor or on the bottom floor. S lives two floors above P whose floor is not below the vacant floor. U lives on an even-numbered floor but not below Q's floor. The number of persons living below U's floor is equal to the number of persons living above P's floor. The vacant floor is above Q's floor but not adjacent to Q's floor.
Which of the following Person – Floor combination is definitely true?

ہدایات: یہ سوالات مندرجہ ذیل معلومات پر مبنی ہیں۔
ایک سات منزلہ عمارت میں رہتے ہیں لیکن لازمی طور پر یکساں ترتیب میں نہیں۔ گراؤنڈ فلور V اور P، Q، R، S، T، U سات افراد کو پہلا فلور مانا جاتا ہے اور گراؤنڈ فلور سے اوپر دوسرا فلور مانا جاتا ہے اور اسی طرح آگے۔ دی گئی عمارت میں ایک فلور خالی کے درمیان دو لوگ رہتے ہیں اور ان میں سے کوئی بھی سب سے اوپر کے فلور یا سب سے نچلے فلور پر نہیں رہتا ہے۔ T اور R ہے۔ کے فلور Q ایک جفت عدد کے فلور پر رہتا ہے لیکن U سے دو فلور اوپر رہتا ہے جس کا فلور خالی فلور کے نیچے نہیں ہے۔ P، S کے فلور سے اوپر رہنے والے لوگوں کی تعداد کے برابر ہے۔ P کے فلور سے نیچے رہنے والے لوگوں کی تعداد U کے نیچے نہیں۔ کے فلور سے ملا ہوا نہیں ہے۔ Q کے فلور کے اوپر ہے لیکن Q خالی فلور
مندرجہ ذیل شخص – فلور مجموعوں میں سے کون یقینی طور پر درست ہے؟

A.R - दुसरा मजला
A.R – Second floor
A.R - دوسرا فلور

B.Q - पहिला मजला
B.Q – First floor
B.Q – پہلا فلور

C.S – चौथा मजला
C.S – Fourth floor
C.S – چوتھا فلور

D.T – तिसरा मजला
D.T – Third floor
D.T – تیسرا فلور

Answer: B.Q - पहिला मजला
B.Q – First floor
B.Q – پہلا فلور

37 दिलेल्या पर्यायांमधून वेगळे ते निवडा.

Choose the odd one out from the given alternatives.

دیے گئے متبادل میں سے بے جوڑ کو چنیں۔

A.आवडता
A.Favorite
A.پسندیدہ

B.आश्चर्यजनक
B.Wonderful
B.حیرت انگیز

C.दुःखी
C.Sad
C.اداس

D.सुंदर
D.Beautiful
D.خوبصورت

Answer: C.दुःखी
C.Sad
C.اداس

38 कोणतेही अक्षर, संख्या, किंवा चिन्ह जे कुंजीपटलावर आढळतात आणि आपण संगणकामध्ये टाईप करू शकतो त्याला म्हणतात …….

Any letter, number, or symbol found on the keyboard that you can type into the computer …….

کوئی لفظ، کوئی نمبر یا کوئی علامات جو کی بورڈ پر پائے جاتے ہں جو آپ کمپیوٹر میں ٹائپ کر سکتے ہیں۔۔۔۔۔

A.आउटपूट
A.Output
A.آوٹ پٹ

B.अक्षर
B.Character
B.کیریکٹر

C.टाईप
C.Type
C.ٹائپ

D.प्रिंट
D.Print
D.پرنٹ

Answer: B.अक्षर
B.Character
B.کیریکٹر

39 Out of the given four words only one is spelt correctly. Find the word that is correctly spelt.

A.Foreign

B.Pronounciation

C.Parliment

D.Questionaire

Answer: A.Foreign

40 A sentence with an underlined idiomatic expression is given. What is the meaning of the idiomatic expression ‘on the cards’ in the sentence given below?
They've played very well, but it doesn't look like a championship title is on the cards for this team today.

A.Very likely or certain to happen, occur, or take place.

B.Remote or no chances of happening or occurring

C.Totally dependent on the magical cards or tokens

D.None of the above

Answer: A.Very likely or certain to happen, occur, or take place.

41 मंगळ आणि शुक्र यादरम्यानचा ग्रह _____ हा आहे

The planet in between Mars & Venus is –

مارس اور وینس کے بیچ میں سیارہ ہے۔

A.बुध
A.Jupiter
A.جیوپیٹر

B.पृथ्वी
B.Earth
B.زمین

C.शनि
C.Saturn
C.مریخ

D.युरेनस
D.Uranus
D.یورینس

Answer: B.पृथ्वी
B.Earth
B.زمین

42 दोन संख्यांचा लसावी 864 आहे आणि त्यांचा मसावी 144 आहे. जर एक संख्या 288 आहे, तर दुसरी संख्या?

The LCM of two numbers is 864 and their HCF is 144. If one of the numbers is 288, the other number is?

دو نمبروں کے ایل سی ایم 864 ہے اور ان کے ایچ سی ایف144 ہے۔ اگر میں سے ایک نمبر 288 ہے تو دوسری نمبر ہے؟

A.576
A.576
A.576

B.1296
B.1296
B.1296

C.432
C.432
C.432

D.144
D.144
D.144

Answer: C.432
C.432
C.432

43 कोण भारताचे पंत प्रधान नव्हते?

Who was not a Prime Minister of India?

ان میں سے کون بھارت کا وزیر اعظم نہیں ہے۔

A.मोरारजी देसाई
A.Morarji Desai
A.مورا رجی دیسائی

B.एन.एस. रेड्डी
B.N.S. Reddy
B.این ایس ریڈی

C.चंद्र शेखर
C.Chandra Shekhar
C.چندر شیکھر

D.व्ही.पी. सिंह
D.V.P. Singh
D.وی پی سنگھ

Answer: B.एन.एस. रेड्डी
B.N.S. Reddy
B.این ایس ریڈی

44 DIRECTIONS: A sentence with an underlined word is given below. Find the word which is opposite in meaning to the underlined word from the given options.
The discovery was made after years of <u>diligent</u> research.

A.Lazy

B.Industrious

C.Hard-working

D.Indefatigable

Answer: A.Lazy

45 खालील प्रश्नात गहाळ अंक शोधा:

Find the missing number in the following questions:

نیچے کے سوال میں ، گمنام نمبر کھوجے :

3	6	8
5	8	4
4	7	?

A. 6

B. 7

C. 8

D. 9

Answer: A. 6

46 जर 10, 12, 16 आणि x हे एका प्रमाणामध्ये असतील, तर x चे मूल्य शोधा.

If 10, 12, 16 and x are in proportion, then find the value x?

اگر 10، 12، 16 اور x تناسب میں ہیں، تو پھر x کی قدر معلوم کریں؟

A.19
A.19
A.19

B.20
B.20
B.20

C.19.2
C.19.2
C.19.2

D.19.3
D.19.3
D.19.3

Answer: C.19.2
C.19.2
C.19.2

47 A ही B ची बहीण आहे. B हा C चा भाऊ आहे, C हा D चा मुलगा आहे. D चे A सोबत नाते काय आहे?

A is the sister of B. B is the brother of C, C is the son of D. How is D related to A?

B A کی بہن ہے. C B کا بھائی ہے، D C کا بیٹا ہے. D کا A سے کیا رشتہ ہے؟

A.आई किंवा वडील
A.Mother or Father
A.ماں یا باپ

B.मुलगी
B.Daughter
B.بیٹی

C.मुलगा
C.Son
C.بیٹا

D.काका
D.Uncle
D.چچا

Answer: A.आई किंवा वडील
A.Mother or Father
A.ماں یا باپ

48 जेव्हा रूग्णाला गुदगुदणे किंवा जळणे, शरीरावर किडा चालत आहे अश्या प्रकारच्या संवेदना होतात तेव्ळा त्याला म्हणतात

When a patient sense or imagine tingling, burning senasation, insects crawling over body then it is termed as

جب کوئی مریض سنسناہٹ ، جلن یا یہ کہ جسم پر کیڑے چل رہے ہیں ایسا محسوس کرتا یا خیال کرتا ہے تو اسے کہا جاتا ہے:

A.घ्राणेंद्रिय आभास
A.Olfactory hallucination
A.قوت شامہ واہمہ

B.स्पर्शयोग्य आभास
B.Tactile hallucination
B.محسوس کیا جانے والا واہمہ

C.श्रवण आभास
C.Auditory hallucination
C.سمعی واہمہ

D.दृष्य आभास
D.Visual hallucination
D.بصری واہمہ

Answer: B.स्पर्शयोग्य आभास
B.Tactile hallucination
B.محسوس کیا جانے والا واہمہ

49 Choose the word which is most similar in meaning to the given word.
PROCURE

A.Obtain

B.Lose

C.Fail

D.Hinder

Answer: A.Obtain

50 विध्यार्थी सामाजिक वर्तनातूनही प्रशिक्षित होऊ शकतात

The student can be trained in social behavior through —

طالب علم کی سماجی رویے میں تربیت کی جاسکتی ہے۔ بذریعہ

A.अभ्यासक्रम
A.Curriculum
A.نصاب

B.शाळेतील सामाजिक व सांस्कृतिक कार्यक्रम
B.Social and cultural programmes in school
B.اسکول میں سماجی اور ثقافتی پروگرام

C.शिस्त
C.Discipline
C.نظم و ضبط

D.वर्ग शिकवणी
D.Class room teaching
D.کلاس روم کی تعلیم

Answer:
B.शाळेतील सामाजिक व सांस्कृतिक कार्यक्रम
B.Social and cultural programmes in school
B.اسکول میں سماجی اور ثقافتی پروگرام

51
सूचना: दोन विधाने आणि त्यानंतर दोन निष्कर्ष, I आणि II दिले आहेत. ही विधाने सामान्यतः ज्ञात वस्तुस्थितीपेक्षा भिन्न असली तरी सत्य आहेत असे समजा. दिलेल्यापैकी कोणता निष्कर्ष दिलेल्या विधानांवरुन नक्की काढता येऊ शकतो हे तुम्ही ठरवायचे आहे.तुमचे उत्तर सूचित करा.

विधाने:
I. सर्व कवी दिवसा स्वप्न पाहणारे असतात.
II. सर्व चित्रकार दिवसा स्वप्न पाहणारे असतात.
निष्कर्ष:
I. सर्व चित्रकार कवी असतात.
II. दिवसा स्वप्न पाहणारे काही जण चित्रकार नसतात

DIRECTION: Two statements are given following by two conclusions, I, and II. You have to consider that statements to be true, even if they seem to be at variance from commonly known facts. You are to decide which of the given conclusions can definitely be drawn from the given statements. Indicate your answer.

Statements:
I. All poets are day dreamers.
II. All painters are day dreamers.

Conclusion:
I. All painters are poets.
II. Some day dreamers are not painters

ہدایات: دو سٹیٹمنٹ جوکہ دو خلاصوں پر مشتمل ہیں .I اور II. اپ کو وہ سٹیٹمنٹ درست ماننا ہے، اگرچہ دکھنے میں وہ بہت سارے حقاٰق ست مطبقت رکہتی ہو۔ اپ کو دیے گے خلاصوں میں سے یقینی طور پر اسے اختیار کرنا ہے جو سٹیٹمنٹ سے نکلا ہو. اپنا جواب تلاش کرے.

اظہار بیان:
I. تمام شاعر خیالی پلاؤ پکانے والے ہوتے ہے.
II. تمام رنگ ساز خیالی پلاؤ پکانے والے ہوتے ہے.

نتائج:
I. تمام رنگ ساز شاعر ہوتے ہے.
II. کچھ خیالی پلاؤ پکانے والے رنگ ساز نہیں ہوتے

A.दोन्ही I आणि II निष्कर्ष निघेल
A.Both I and II follow
A. دونوں I اور II تعاقب کرتے ہے

B.I किंवा II निष्कर्षही निघणार नाही
B.Neither I nor II follows
B. نہ I نہ II تعاقب کرتا ہے

C.केवळ I निष्कर्ष निघेल
C.Only I follows
C. خالی I تعاقب کرتا ہے

D.केवळ II निष्कर्ष निघेल
D.Only II follows
D. خالی II تعاقب کرتا ہے

Answer: B.I किंवा II निष्कर्षही निघणार नाही
B.Neither I nor II follows
B. نہ I نہ II تعاقب کرتا ہے

52 दिलेल्या शब्दांच्या दरम्यानचे नाते उत्तमरित्या दर्शवणारी अचूक आकृती ओळखा.
महिला, आई, विधवा

Choose the correct figure that relationship between the given words.
Woman, Mother, Widow

صحیح تصویر کو منتخب کریں جو دیئے گئے الفاظ کے درمیان تعلقات کی نمایندگی کرتی ہے.
عورت، ماں، بیوہ

(A) 

(B) 

(C) 

(D) 

Answer: (B) 

53 शास्त्रज्ञांच्या वैयक्तिक वैशिष्ट्यांचा विचार करणाऱ्या मानसशास्त्र उप-विषयाला असे म्हणतात

The sub discipline of psychology that looks at the personal traits of scientists is called

سائنسدانوں کی ذاتی علامات کو دیکھتے ہوئے نفسیات کے ذیلی نظم و ضبط کو کہا جاتا ہے

A.विज्ञानाचे मानसशास्त्र (सायकॉलॉजी ऑफ सायन्स)
A.Psychology of science
A.سائنس کی نفسیات

B.मानसशास्त्राचे विज्ञान (सायन्स ऑफ सायकोलॉजी)
B.Science of psychology
B.نفسیات کی سائنس

C.शास्त्रज्ञांचे मानसशास्त्र (सायकोलॉजी ऑफ सायंटिस्ट)
C.Psychology of scientists
C.سائنس دانوں کی نفسیات

D.आत्मचरित्रात्मक अभ्यासातील मानसशास्त्र
D.Psychology in autobiographical study
D.خود سوانح عمری کے مطالعہ کی نفسیات

Answer: A.विज्ञानाचे मानसशास्त्र (सायकॉलॉजी ऑफ सायन्स)
A.Psychology of science
A.سائنس کی نفسیات

54 $(0.064)\times(0.4)^7=(0.4)^n\times(0.0256)^2$

$(0.064)\times(0.4)^7=(0.4)^n\times(0.0256)^2$

$(0.064)\times(0.4)^7=(0.4)^n\times(0.0256)^2$

A.17
A.17
A.17

B.2
B.2
B.2

C.18
C.18
C.18

D.3
D.3
D.3

Answer: B.2
B.2
B.2

55 निर्देश: दिलेल्या पर्यायांमधून, दिलेल्या शब्दाच्या अक्षरांचा वापर करून तयार केला जाईल असा शब्द निवडा:
EXPERIENCE

DIRECTIONS: From the given alternatives, select the one which can be formed using the letters of the given word:
EXPERIENCE

ہدایات: دیے گیے متبادل میں سے، ایک ایسے کو چونیں جودیے گیے لفظ کے حروف کو استعمال کرکے بنایا جاسکتا ہے
'EXPERIENCE'

A.EXPIRE
A.EXPIRE
A.EXPIRE

B.PERCIEVE
B.PERCIEVE
B.PERCIEVE

C.EMPIRE
C.EMPIRE
C.EMPIRE

D.EXPENSE
D.EXPENSE
D.EXPENSE

Answer: A.EXPIRE
A.EXPIRE
A.EXPIRE

56 तनईची आई ही निशाची मुलगी आहे. आरोही तनयच्या आईच्या जावयाची पत्नी आहे. आरोहीचे तनयसोबत काय नाते आहे?

Tanay's mother is Nisha's daughter. Aarohi is the wife of Tanay’s mother’s son-in-law. How is Aarohi related to Tanay?

تنایا کی ماں نشا کی بیٹی ہے. آروہی تنایا کی ماں کے داماد کی بیوی ہے. آروہی کا تنایا سے کیا رشتہ تھا؟

A.बहीण
A.Sister
A.تنایا کی ماں نشا کی بیٹی ہے. آروہی تنایا کی ماں کے داماد کی بیوی ہے. آروہی کا تنایا سے کیا رشتہ تھا؟

B.आई
B.Mother
B.بہن

C.मुलगी
C.Daughter
C.ماں

D.सून
D.Sister-in-law
D.بیٹی

Answer: A.बहीण
A.Sister
A.تنایا کی ماں نشا کی بیٹی ہے. آروہی تنایا کی ماں کے داماد کی بیوی ہے. آروہی کا تنایا سے کیا رشتہ تھا؟

57 मधामध्ये मुख्यत: हे असते

Honey contains mainly

شہد میں خاص طور سے _____ ہوتا ہے۔

A.प्रोटीन
A.Proteins
A.پروٹین

B.कार्बोहायड्रेड
B.Carbohydrates
B.کابوہائڈریٹ

C.चरबी
C.Fat
C.موٹاپا

D.जीवनसत्व
D.Vitamin
D.وٹامن

Answer: B.कार्बोहायड्रेड
B.Carbohydrates
B.کابوہائڈریٹ

58	जैविक पर्यावरणमध्ये समावेश आहे Biotic environment includes بایوٹک ماحول میں شامل ہے
	A.उत्पादक A.Producers A.بنانے والے
	B.उपभोक्ता B.Consumers B.صارفین
	C.विघटनकारी C.Decomposers C.گلانے والے
	D.वरीलपैकी सर्व D.All the above D.مندرجہ بالا تمام
Answer:	D.वरीलपैकी सर्व D.All the above D.مندرجہ بالا تمام
59	40 सेकंद हे 1 मिनिटाचे किती टक्के आहेत? What percent is 40 seconds of 1 minute? 40 سیکنڈ 1 منٹ کا کتنا فیصد ہوگا۔
	A.66.66% A.66.66% A.66.66%
	B.67.23% B.67.23% B.67.23%

	C.68.23% C.68.23% C.68.23%
	D.69.23% D.69.23% D.69.23%
Answer:	A.66.66% A.66.66% A.66.66%

60 सूचना: प्रत्येक प्रश्नाला एक प्रमुख विधानासोबत चार विधाने आहेत ज्यांच्याखाली A, B, C आणि D असे चार विधान आहेत. क्रमवार विधानांची जोडी निवडा ज्यामध्ये प्रथम विधान दुसऱ्या विधानाला सुचवते, आणि दोन्ही विधाने तर्किकदृष्ट्या प्रमुख विधानासोबत निगडित असेल.

जर तुम्ही सोशल मीडियावर बराच वेळ खर्च केला, तर तुम्ही खूप मौल्यवान वेळ वाया घालवता.
A. तुम्ही सोशल मीडियावर बराच वेळ घालवला
B. तुम्ही सोशल मीडियावर बराच वेळ घालवला नाही
C. तुम्ही खूप मौल्यवान वेळ वाया घालवला
D. तुम्ही खूप मौल्यवान वेळ वाया घालवला नाही

DIRECTIONS: Each question has a main statement followed by four statements labelled A, B, C and D. Choose the ordered pair of statements, where the first statement implies the second, and the two statements are logically consistent with the main statement.

If you spend too much time on social media , you waste a lot of precious time .
A. you spent too much time on social media
B. you did not spend too much time on social media
C. you wasted a lot of precious time
D. you did not waste a lot of precious time

ہدایت: ہر سوال میں ایک جملہ ہے جسکے بعد چار جملےاے، بی،سی اور ڈی کے نام سے دئے گئے ہیں اسمیں منسلک جوڑیوں کو چنئے۔ جہاں پہلا جملہ دوسرے جملہ کی اور اشارہ کر رہا ہے اور دو جملے منطقی مرکزی بیان کے مطابق ہیں

اگر آپ سوشل میڈیا پر بہت زیادہ وقت گزاریں گے تو انتہائی قیمتی وقت ضائع کریں گے
Aآپ نے سوشل میڈیا پر بہت زیادہ وقت گزارا ۔
Bآپ نے سوشل میڈیا پر بہت زیادہ وقت نہیں گزارا ۔
Cآپ نے انتہائی قیمتی وقت ضائع کیا ۔
Dآپ نے انتہائی قیمتی وقت ضائع نہیں کیا ۔

A.AB
A.AB
A.AB

B.BC
B.BC
B.BC

C.DA
C.DA
C.DA

D.DB
D.DB
D.DB

Answer: D.DB
D.DB
D.DB

61 जर 10 व्यक्ती एक काम 20 दिवसांत करत असतील, तर दुप्पट कार्यक्षमता असलेले 20 व्यक्ती तेच काम किती दिवसांत पूर्ण करतील?

If 10 persons can do a job in 20 days, then 20 persons with the twice efficiency can do the same job in how many days?

اگر 10لوگ ایک کام 20 دنوں میں کر سکتے ہیں تو 20 لوگ دوگنی کارکردگی کے ساتھ وہی کام کتنے دنوں میں کر سکتے ہیں؟

A.10
A.10
A.10

B.20
B.20
B.20

C.5
C.5
C.5

D.15
D.15
D.15

Answer: C.5
C.5
C.5

62 ‘रामचरित्रमानस’ हे _____चे कार्य आहे

‘Ramacharitmanas’ is the work of –

رام چرت مانس کام ہے

A.तुलसीदास
A.Tulsidas
A.تلسی داس کا

B.कबीर
B.Kabir
B.کبیر کا

C.कालिदास
C.Kalidasa
C.کالی داس کا

D.शुद्रका
D.Shudraka
D.شودر کا

Answer: A.तुलसीदास
A.Tulsidas
A.تلسی داس کا

63 सूचना: खाली दिलेल्या विधान (A) आणि कारण (R) साठी, खालील पैकी योग्य पर्याय निवडा:

विधान (A): निरोगी आहाराच्या योजनेनुसार कर्करोग प्रतिबंध करण्यात मदत होऊ शकते.
कारण (R): कर्करोगामुळे A जीवनसत्वाची कमतरता येते.

DIRECTION: For the Assertion (A) and Reason (R) given below, choose the correct alternative from the following:

Assertion (A): Following a healthy diet plan can help in prevention of cancer.
Reason (R): Cancer is caused due to deficiency of vitamin A.

ہدایت: نیچے دئیے گئے اسرشن (A) اور وجہ (R) کے لئے، مندرجہ ذیل میں سے صحیح متبادل منتخب کریں:

اسرشن (A): صحت مند غذا کی منصوبہ بندی کی پیروی کرنے سے کینسر کی روک تھام میں مدد مل سکتی ہے۔
وجہ (R): وٹامن اے کی کمی کینسر کا سبب بنتی ہے۔

A.दोन्ही (A) आणि (R) सत्य आहेत आणि (R) (A) च योग्य स्पष्टीकरण आहे
A.Both (A) and (R) are true and (R) is the correct explanation of (A)
A. (A) اور (R) دونوں صحیح ہیں اور (R) (A) کی درست وضاحت ہے

B.दोन्ही (A) आणि (R) खरे आहेत, परंतु (R) (A) च योग्य स्पष्टीकरण नाही
B.Both (A) and (R) are true, but (R) is not the correct explanation of (A)
B. (A) اور (R) دونوں صحیح ہیں، لیکن (R) (A) کی درست وضاحت نہیں ہے

C.(A) सत्य आहे, परंतु (R) खोटे आहे.
C.(A) is true, but (R) is false
C. (A) صحیح ہے، لیکن (R) غلط ہے

D.दोन्ही (A) आणि (R) खोटे आहेत
D.Both (A) and (R) are false
D. (A) اور (R) دونوں غلط ہیں

Answer: D.दोन्ही (A) आणि (R) खोटे आहेत
D.Both (A) and (R) are false
D. (A) اور (R) دونوں غلط ہیں

64 _____ म्हणजे वाकशक्ती सामग्रीमध्ये कमी पणा.

_____ is reduction in speech content

_____ تقریر کے مواد میں کمی ہے

A.अलोजिया
A.Alogia
A.االوگیا

B.वाचाभंग
B.Aphasia
B.افسا

C.सीवीए
C.CVA
C.سی وی اے

D.अपवर्तन
D.Aversion
D.آویرسیوں

Answer: A.अलोजिया
A.Alogia
A.االوگیا

65 जेव्हा काही विद्यार्थ्यांचे पालक तक्रार करतात कि त्यांच्या मुलाला अत्यंत खोटे बोलण्याची सवय लागली आहे व गृहपाठासाठी अजिबात महत्व देत नाहीत, आपण करू-

If some student's parents make a complaint that the child has developed the excessive habit of telling-a-lie and never give due importance to home-work, you will do—

اگر کچھ طلبہ کے والدین شکایت کرتے ہیں کہ بچہ نے جھوٹ بولنے کی زیادہ عادت اپنا لی ہے اور وہ کبھی گھریلو کام کو اہمیت نہیں دیتا ہے تو،

A.निश्चित गोष्टीची पुष्टी केल्यानंतर, मुलाबद्दल सावध राहू
A.After due confirmation, be vigilant towards the child in future
A.تصدیق کے بعد، مستقبل میں بچے کی طرف متوجہ ہو

B.) पालक सावध झाल्यामुळे मुलाच्या समस्येबद्दल विसरून जाणार
B.Forget about the child's problem as parent has become vigilant
B.بچے کی دشواری کے بارے میں بھول جاؤ کیونکہ والدین زیادہ محتاط بن گئے ہیں

C.त्याच्या पालकासोबत मुलाचा देखील अपमान करु
C.Insult the child along with his parent
C.والدین کے سامنے بچے کی تذلیل

D.मुलाशी संवाद करताना आपल्या कौशल्याबद्दल बढूनचढून सांगणार
D.Speaking high about your skills to deal with the child.
D.بچے سے نمٹنے کے لئے آپ کی مہارت کے بارے میں بلند بات کرتے ہوئے.

Answer: A.निश्चित गोष्टीची पुष्टी केल्यानंतर, मुलाबद्दल सावध राहू
A.After due confirmation, be vigilant towards the child in future
A.تصدیق کے بعد، مستقبل میں بچے کی طرف متوجہ ہو

66 च्या मार्फत एखाद्या विद्यार्थ्याला पुरेशी प्रेरणा मिळू शकते-

A learner may get adequate motivation through—

ایک سیکھنے والا---- کے ذریعے کافی حوصلہ افزائی حاصل کر سکتا ہے-

A.महत्वाकांक्षा
A.Ambition
A.امتحان

B.चांगली शाळा
B.Good school
B.اچھا اسکول

C.महान व्यक्तींची कथा
C.Stories of the great persons
C.عظیم افراد کی کہانیاں

D.वरील सर्व
D.All of the above
D.اوپر کا سارا

Answer: B.चांगली शाळा
B.Good school
B.اچھا اسکول

67	इस्राईलची राजधानी _____ कोणती आहे? What is the capital of Israel? اسرائیل کی راجدھانی ہے۔
	A.अमान A.Amman A.عمان
	B.तेरु सालेम B.Jerusalem B.یروشلم
	C.रामाल्लाह C.Ramallah C.رام اللہ
	D.दोहा D.Doha D.دوہا
Answer:	B.तेरु सालेम B.Jerusalem B.یروشلم
68	जेव्हा घड्याळ 3 तास 14 मिनिटे दर्शवत असेल, तर घड्याळाच्या काट्यांमधील कोन काय असेल? When the clock shows 3 hours 14 minutes, what is the angle between the hands of the clock? گھڑی جب 3 بجکر 14 منٹ کا وقت دکھاتی ہے، اس وقت گھڑی کی دونوں سوئیاں کونسا زاویہ بناتی ہیں؟
	A.10° A.10° A.10°
	B.12° B.12° B.12°
	C.13° C.13° C.13°
	D.14° D.14° D.14°

Answer: C.13°
C.13°
C.13°

69 सूचना: खालील प्रश्नांमध्ये दिलेल्या पर्यायांमधून संबंधित अक्षर/शब्द/संख्या निवडा.

घर : छत :: ?

DIRECTIONS: In the following question, select the related letter/word/number from the given alternatives.

House : Ceiling :: ?

سمت: مندرجہ ذیل سوال میں، دیے گئے متبادل سے متعلقہ حرف/لفظ/نمبر منتخب کریں۔

گھر : چھت :: ؟

A.शरीर : डोके
A.Body : Head
A.جسم : سر

B.चित्र काढणे : ब्रश
B.Paint : Brush
B.پینٹ برش

C.कान/ दांडा : सायकल
C.Handle : Cycle
C.ہینڈل : سائیکل

D.पंतप्रधान : देश
D.Prime Minister : Country
D.وزیر اعظم : ملک

Answer: A.शरीर : डोके
A.Body : Head
A.جسم : سر

70 L हा X चा पिता आहे आणि Y हा M चा मुलगा आहे. S हा L चा भाऊ आहे. जर X ही Y ची बहीण असेल तर, M चे S सोबत नाते काय आहे?

L is father of X and Y is son of M. S is brother of L. If X is sister of Y, how is M related to S?

X L کا باپ ہے اور M Y کا بیٹا ہے. اگر L S کی بہن ہے، تو Y X کا بھائی ہے M کا S سے کیا رشتہ ہے؟

A.सून
A.Daughter-in-law
A.بہو

B.पती
B.Husband
B.شوہر

C.पत्नी
C.Wife
C.بیوی

D.मेव्हणी
D.Sister-in-law
D.بھابی

Answer: D.मेव्हणी
D.Sister-in-law
D.بھابی

71 मालिकेचा मध्यक काढा:
4,15,69

Find the median for the series:
4,15,69

دئے ہوئے اعداد کا اوسط (میڈین) ہوگا
4,15,69

A.15
A.15
A.15

B.14
B.14
B.14

C.13
C.13
C.13

D.12
D.12
D.12

Answer: A.15
A.15
A.15

72 निर्देश: खालीदिलेल्या अक्षराच्या क्रमात काही अक्षरे गहाळ केली आहेत ते त्या क्रमाने खाली दिलेल्या पर्यायांपैकी एक आहे

b _ c _ a _ b _ c _ _c

DIRECTIONS: In each of the following letter series, same of the letters are missing which are given in that order as one of the alternatives below it.

b _ c _ a _ b _ c _ _c

دایت جیل کے حرف سرج میں کوئی حرف گمشدہ ہے آپکو انکی شناخت جیل کے اختیارات سے کرنی ہے

b _ c _ a _ b _ c _ _c

A.ababab
A.ababab
A.ababab

B.abcaba
B.abcaba
B.abcaba

C.abcabc
C.abcabc
C.abcabc

D.abacab
D.abacab
D.abacab

Answer: B.abcaba
B.abcaba
B.abcaba

73 लोक सहकार्य करतील किंवा स्पर्धा करतील हे निर्धारित करणारा घटक म्हणजे-

Factors determining whether people will cooperate or compete

وہ عناصر جو یہ طے کرتے ہیں کہ لوگ تعاون کریں گے یا مقابلہ کریں گے:

A.पुरस्कार रचना
A.Reward Structure
A.جزا و اجر(ریوارڈ) ڈھانچہ

B.परस्पर संवाद
B.Interpersonal Communication
B.شخصی رابطہ

C.परस्परभाव
C.Reciprocity
C.سپراسٹی (عمل در عمل،مقابلہ درمقابلہ)

D.हे सर्व
D.All of these
D.مذکورہ تمام

Answer: D.हे सर्व
D.All of these
D.مذکورہ تمام

74 दोन व्यक्तींच्या वयामधील फरक 10 वर्षे आहे. 15 वर्षांपूर्वी, मोठा व्यक्तीचे वय हे लहान व्यक्तीच्या वयाच्या दुप्पट होते. लहान व्यक्तीचे वर्तमान वय काय आहे?

The difference between the age of two persons is 10 years. 15 years ago, the elder one was twice the age of younger one. What is the present age of younger one?

دو آدمیوں کی عمروں کے درمیان 10 سال کا فرق ہے۔15 سال پہلے، بڑے والے کی عمر چھوٹے والے کی عمر کے دو گنا تھی۔ چھوٹے کی موجودہ عمر کیا ہے؟

A.45
A.45
A.45

B.35
B.35
B.35

C.40
C.40
C.40

D.25
D.25
D.25

Answer: D.25
D.25
D.25

75 सूचना: खालील प्रश्नांमध्ये दिलेल्या पर्यायांमधून संबंधित अक्षर/शब्द/संख्या निवडा.

दंडशास्त्र : दंड : : भूकंपशास्त्र : ?

DIRECTIONS: In the following question, select the related letter/word/number from the given alternatives.

Penology : Punishment : : Seismology : ?

سمت: مندرجہ ذیل سوال میں، دیے گئے متبادل سے متعلقہ حرف/لفظ/نمبر منتخب کریں۔

مجرموں کا مطالعہ : سزا : : زلزلہ شناسی : ؟

A.कायदा
A.Law
A.-قانون

B.पित्ताशय
B.Liver
B.-جگر

C.भूकंप
C.Earthquakes
C.-زلزلہ

D.औषधे
D.Medicines
D.-دوائیں

Answer: C.भूकंप
C.Earthquakes
C.-زلزلہ

76 खालीलपैकी शुद्ध शब्द कोणता ?

A.जीवघेना

B.जिवघेणा

C.जीवघेणा

D.जीवघाणा

Answer: C.जीवघेणा

77	खालीलपैकी सर्वांत मोठा अपूर्णांक शोधा Find the largest among the following fraction مندرجہ ذیل کسور میں سے سب سے بڑی کسر تلاش کریں
	A.17/9 A.17/9 A.17/9
	B.23/11 B.23/11 B.23/11
	C.27/14 C.27/14 C.27/14
	D.25/12 D.25/12 D.25/12
Answer:	B.23/11 B.23/11 B.23/11

78 सूचना: या प्रत्येक प्रश्नांमध्ये तुम्हाला A आणि B अशी दोन विधाने दिलेली आहे आणि (I) आणि (II) असे दोन निष्कर्ष दिलेले आहेत. सामान्यपणे माहीत असलेल्या तथ्यांशी जुळत नसले तरी खालील दोन विधाने बरोबर आहेत असे समजा. खालीलपैकी कोणते निष्कर्ष दिलेल्या वाक्यांना संपूर्णपणे लागू आहे ते ठरवा.
निवेदन:
A: सर्व खिडक्या दारे असतात.
B: कोणतेही दार भिंत नाही.
निष्कर्ष:
I: कोणतीही खिडकी भिंत नाही.
II: कोणतेही भिंत दार नाही.

DIRECTION: In each of these questions, you are given two statements A and B followed by two conclusions (I) and (II). You have to take the two statements to be true even if they seem to be at variance from commonly known facts. You are to decide which of the given conclusions definitely follows from the given statements.

Statements:
A: All windows are doors.
B: No door is wall.

Conclusions:
I: No window is wall.
II: No wall is door.

ہدایت:ان سوالوں میں سے ہر ایک میں، آپ کو دو بیانات A اور B دیے گئے ہیں جن کے بعد دو نتائج (I) اور (II) دیے گئے ہیں۔ آپ کو دونوں بیانات کو درست تسلیم کرنا ہے اگرچہ وہ عام طور پر معلوم حقائق کے برعکس نظر آتے ہوں۔ آپ کو فیصلہ کرنا ہے کہ دیے گئے نتائج میں سے کون یقینی طور پر دیے گئے بیانات کی پیروی کرتا ہے۔

بیانات:
A: سبھی کھڑکیاں دروازے ہیں۔
B: کوئی دروازہ دیوار نہیں ہے۔

حل:
I: کوئی کھڑکی دیوار نہیں ہے۔
II. کوئی دیوار دروازہ نہیں ہے۔

A.जर केवळ निष्कर्ष I निघत असल्यास.
A.If only conclusion I follows
A.صرف نتیجہ I پیروی کرتا ہے۔

B.जर केवळ निष्कर्ष II निघत असल्यास.
B.If only conclusion II follows
B.صرف نتیجہ II پیروی کرتا ہے۔

C.जर दोन्ही निष्कर्ष I आणि II निघत असल्यास.
C.If both I and II follow
C.دونوں I اور II پیروی کرتے ہیں۔

D.जर दोन्ही निष्कर्ष I आणि II निघत नसल्यास.
D.If neither I nor II follows
D.نہ تو I نہ ہی II پیروی کرتا ہے۔

Answer: C.जर दोन्ही निष्कर्ष I आणि II निघत असल्यास.
C.If both I and II follow
C.دونوں I اور II پیروی کرتے ہیں۔

79 $(\sqrt{8})^{1/3}$ = ?

$(\sqrt{8})^{1/3}$ = ?

$(\sqrt{8})^{1/3}$ = ?

A.2
A.2
A.2

B.4
B.4
B.4

C.√2
C.√2
C.√2

D.8
D.8
D.8

Answer: C.√2
C.√2
C.√2

80 x आणि y चे मूल्य आहे:
Value of x and y is:
y اورx کی قیمت یہ ہے:

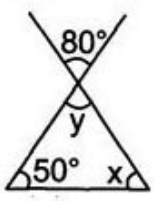

(A) x = 60°, y = 80°

(B) x = 80°, y = 50°

(C) x = 50°, y = 80°

यांपैकी कोणतेही नाही

(D) None of these

کوئی نہیں

Answer: (C) x = 50°, y = 80°

81 निर्देश: खालील शब्दांची इंग्रजी शब्दकोशानुसार मांडणी करा.
(a) Preach
(b) Praise
(c) Precinct
(d) Precept
(e) Precede

DIRECTIONS: Arrange the following words according to the English dictionary.
(a) Preach
(b) Praise
(c) Precinct
(d) Precept
(e) Precede

ہدایت: انگریزی لغت کے مطابق مندرجہ ذیل الفاظ کو مرتب کریں۔

Preach (a)
Praise (b)
Precinct (c)
Precept (d)
Precede(e)

A.(b), (a), (e), (d), (c)
A.(b), (a), (e), (d), (c)
A.(b), (a), (e), (d), (c)

B.(b), (a), (c), (d), (e)
B.(b), (a), (c), (d), (e)
B.(b), (a), (c), (d), (e)

C.(a), (b), (e), (d), (c)
C.(a), (b), (e), (d), (c)
C.(a), (b), (e), (d), (c)

D.(b), (e), (a), (d), (c)
D.(b), (e), (a), (d), (c)
D.(b), (e), (a), (d), (c)

Answer: A.(b), (a), (e), (d), (c)
A.(b), (a), (e), (d), (c)
A.(b), (a), (e), (d), (c)

82 निर्देश: खालील प्रत्येक वर्ण मालिके मध्ये, काही अक्षरे गहाळ आहेत, जे खाली दिलेल्या पर्यायां मध्ये एका क्रमाने दिलेली आहेत. योग्य पर्याय निवडा.

a - c - abb - a - bc - ab - ca

DIRECTION: In each of the following letter series, some of the letters are missing, which are given in that order as one of the alternatives below it. Choose the correct alternative.

a - c - abb - a - bc - ab - ca

ہدایت نیچے دے حرف کے سرج مے کچھ حرف گمشدہ ہے نیچے دے گئے اختیارات سے سسہی اختیار چنے

a - c - abb - a - bc - ab - ca

A.cbcaaa
A.cbcaaa
A.cbcaaa

B.bccab
B.bccab
B.bccab

C.bccaac
C.bccaac
C.bccaac

D.bccacb
D.bccacb
D.bccacb

Answer: D.bccacb
D.bccacb
D.bccacb

83 **सूचना:** प्रश्न आकृत्यांमधील दुसऱ्या आकृतीचे पहिल्या आकृतीशी विशिष्ट नाते आहे. तशाच प्रकारे तिसऱ्या आकृतीचे तसेच नाते उत्तरासाठी दिलेल्या पर्यायी आकृत्यांपैकी एका आकृतीशी आहे. प्रश्नचिन्हाची (?) जागा घेणारी योग्य आकृती शोधून काढा.

DIRECTIONS: The second figure in the first unit of Problem Figures bears a certain 'relationship to' the first figure. Similarly, one of the figures iii the Answer Figures bears the same relationship to the first figure in the second unit of the problem figures. You are therefore to locate the figure which would fit the question mark.

ہدایات: مسئلہ کی تصویر کے پہلے یونٹ کی دوسری تصویر پہلی تصویر 'سے بعض تعلق' رکھتا ہے- اسی طرح سے، جواب کی تصاویر میں سے ایک تصویر کا مسئلے کی تصاویر کی دوسری یونٹ کی پہلی تصویر کے ساتھ بھی وہی تعلق ہے- لہذا، آپ کو اس تصویر کا پتہ لگانا ہے جو سوال کے نشان کی جگہ پر فٹ ہوگی-

प्रश्न आकृत्या
Problem Figures
مسئلہ کی تصاویر

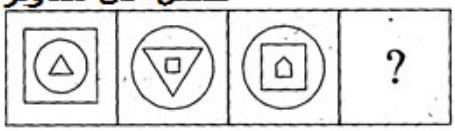

उत्तरासाठी पर्यायी आकृत्या
Answer Figure
جوابی تصویر

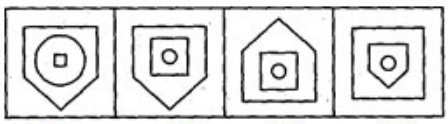

A. (A)

B. (B)

C. (C)

D. (D)

Answer: D. (D)

84 दोन्हीकडे लक्ष केंद्रित करण्याचे कार्य किंवा अतिक्रियाशिल आणि आवेगशिल वर्तणुकीची गंभीर आणि वारंवार समस्या म्हणजे-

Severe and frequent problems of either or both attention tasks or hyper active and impulsive behavior

یا تو دونوں توجہ کے کام یا ہائپر فعال اور تاخیر رویے دونوں کے سخت اور مسلسل مسائل

A.एडीएचडी
A.ADHD
A.ADHD

B.एएसडी
B.ASD
B.ASD

C.जीएडी
C.GAD
C.GAD

D.घाबरगुंटीचाविकार
D.Panic disorder
D.آتنک ڈس آرڈر

Answer: A.एडीएचडी
A.ADHD
A.ADHD

85 44100 मी^{2} चौरस आकार असलेल्या फुटबॉल मैदानांला कुंपण घालण्यासाठी किती लांबीचे कुंपण लागेल?

What length of fencing is required to fence a square shaped football ground of 44100 m^2?

ایک 44100 مربع میٹر فٹبال کے گراونڈ کو گھیر نے کےلئیے کتنے لمبے باڑے کی ضرورت ہوتی ہے؟

A.420 मी
A.420 m
A.420میٹر

B.840 मी
B.840
B.840میٹر

C.1680 मी
C.1680 m
C.1680میٹر

D.640 मी
D.640 m
D.640میٹر

Answer: B.840 मी
B.840
B.840میٹر

86 घटक जो प्रेरणेशी संबंधीत नाही-

The component which does not belong to motivation is —

جزو، جو حوصلہ افزائی سے متعلق نہیں ہے -

A.गरज
A.Need
A.ضرورت

B.धिक्कारणे
B.Drive
B.ترغیب

C.प्रोत्साहन
C.Incentive
C.انعام

D.अंत:प्रेरणा
D.Instinct
D.جبلت

Answer: D.अंत:प्रेरणा
D.Instinct
D.جبلت

87 Out of the given options, choose the one which is the correct indirect speech of the sentence given below.
The guest said, “It gives me great pleasure to be here this evening.”

A.The guest said that it gave him great pleasure to be here this evening.

B.The guest said that it gives him great pleasure to be here that evening.

C.The guest said that it gives him great pleasure to be there this evening.

D.The guest said that it gave him great pleasure to be there that evening.

Answer: D.The guest said that it gave him great pleasure to be there that evening.

88 ‘ उन्मत्त ‘ या शब्दाचा समानार्थी शब्द कोणता ?

A.गर्विष्ठ

	B.मवाळ
	C.विनम्र
	D.विनयशील
Answer:	A.गर्विष्ठ
89	प्रश्नासाठी सूचना: खालील मालिका पूर्ण करा. 2W3, 1S9,1Q7, _____, 1K1 DIRECTION: Complete the following series. 2W3, 1S9,1Q7, _____, 1K1 سوال کے لیے ہدایت:مندرجہ ذیل سیریز کو مکمل کریں۔ 2W3, 1S9, 1Q7, _____, 1K1
	A.1P6 A.1P6 A.1P6
	B.1M3 B.1M3 B.1M3
	C.1R8 C.1R8 C.1R8
	D.1S9 D.1S9 D.1S9
Answer:	B.1M3 B.1M3 B.1M3

90 यापैकी कोणती आकृती काका, पालक, मित्र यांच्या दरम्यानचे नाते दर्शवते?

Which one of the following figures represents the relationship among Uncles, Parents, Friends?

مندرجہ ذیل میں سے کون سی تصویر چچوں، والدین، دوستوں کے درمیان تعلقات کی نمائندگی کرتی ہے؟

(A) 

(B) 

(C) 

(D) 

Answer: (D) 

91 **जर** a = 2045 **असेल, तर** $\sqrt{a^2-2a+1}$ **चे मूल्य किती:**

If a = 2045 then the value of $\sqrt{a^2-2a+1}$ is:

اگر a = 2045 تو پھر $\sqrt{a^2-2a+1}$ کی قدر ہے:

A. 2039

B. 2078

C. 2044

D. 2107

Answer: C. 2044

92 “दि सॅटामिक व्हर्सेस” हे _____ यांनी लिहिले आहे

“The Satanic Verses” was written by –

دی سیتانک ورس کے مصنف ہیں۔

A.व्ही. एस. नैपौल
A.V.S. Naipaul
A.وی اس نائیول

B.सलमान रूश्दी
B.Salman Rushdie
B.سلمان رشدی

C.अमिताव घोष
C.Amitav Ghosh
C.امیتو گھوش

D.अरुंधती रॉय
D.Arundhati Roy
D.اروندھاتی رائے

Answer: B.सलमान रूश्दी
B.Salman Rushdie
B.سلمان رشدی

93 खालीपैकी कोणते उपकरण पाण्यातील पोष्कतत्वे, मिठ किंवा दुषिततेचे निरिक्षण करण्यासाठी मदत करते?

Which of the following instrument can help to monitor the amount of nutrients, salts or impurities in water?

مندرجہ ذیل آلہ سے کون پانی میں غذائی اجزاء، نمک یا نجاست کی مقدار کو چیک کرنے میں مدد کر سکتا ہے ؟

A.थर्मामिटर
A.Thermometre
A.تھرمامیٹر

B.बारोमिटर
B.Barometre
B.بیرو میٹر

C.कंडक्टिव्हिटी मिटर
C.Conductivity metre
C.کنڈکٹیوٹی میٹر

For More Info And Videos About TAIT-Exam Syllabus And Other Exam Visit My Channel
TAIT च्या 30 प्रश्नपत्रिका PDF
BADSHAHimp Available Request 9765226781
WWW.YouTube.com/BADSHAHimp
Subscribe My Channel

D.कॅलोरीमेट्रे
D.Calorimetre
D.کیلوری میٹر

Answer: C.कंडक्टिव्हिटी मिटर
C.Conductivity metre
C.کنڈکٹیوٹی میٹر

94 10 मी/सें ला किमी/ता मध्ये रूपांतरीत करा

Convert 10m/s into km/h

10میٹر/سیکنڈ کو کلومیٹر/گھنٹہ میں بدلیں

A.36
A.36
A.36

B.42
B.42
B.42

C.40
C.40
C.40

D.32
D.32
D.32

Answer: A.36
A.36
A.36

For More Info And Videos About TAIT-Exam Syllabus And Other Exam Visit My Channel
TAIT च्या 30 प्रश्नपत्रिका PDF
BADSHAHimp Available Request 9765226781
WWW.YouTube.com/BADSHAHimp
Subscribe My Channel

95 सूचना: यांपैकी प्रत्येक प्रश्नात अक्षरे, शब्द किंवा संख्यांचे चार समूह देण्यात आलेले आहेत.

त्यांपैकी वेगळे ते निवडा.

DIRECTIONS: In each of the questions, four groups of letters, words or numbers are given.

Find the odd one out.

سمت: ہر سوال میں، حروف، الفاظ یا اعداد کے چار گروپ دیے گئے ہیں۔

بے جوڑ کو تلاش کریں۔

A.6958
A.6958
A.6958

B.7948
B.7948
B.7948

C.9786
C.9786
C.9786

D.6895
D.6895
D.6895

Answer: C.9786
C.9786
C.9786

96 ख्रिस्टोफर कोलंबस हा _____च्या शोधाशी संबंधित आहे

Christopher Columbus is associated with the discovery of –

کرسٹوفر کولمبس کس کھوج سے جڑے ہوئے ہیں۔

A.भारत
A.India
A.بھارت کی

B.आफ्रिका
B.Africa
B.افریقہ کی

For More Info And Videos About TAIT-Exam Syllabus And Other Exam Visit My Channel
TAIT च्या 30 प्रश्नपत्रिका PDF
BADSHAHimp Available Request 9765226781
WWW.YouTube.com/BADSHAHimp
Subscribe My Channel

C.अमेरीका
C.America
C.امریکہ کی

D.ऑस्ट्रेलिया
D.Australia
D.آسٹریلیا کی

Answer: C.अमेरीका
C.America
C.امریکہ کی

97 सूचना: हे प्रश्न खालील माहितीवर आधारित आहेत.
सहा लोक P, Q, R, S, T, आणि U सात मजली इमारतीमध्ये राहतात, पण ते याच क्रमात राहतात असे नाही.
तळमजल्याला पहिला मजला समजले जाते आणि त्या वरच्या मजल्यांना अनुक्रमे दुसरा, तिसरा .... असे समजले जाते.
इमारतीतला एक मजला रिकामा आहे. R आणि T यांच्यामध्ये दोन लोक राहतात, पण त्यांच्यापैकी कोणीही सर्वात वरच्या किंवा तळमजल्यावर राहत नाही. S Pच्या दोन मजले वर राहतो, P चा मजला रिकाम्या मजल्याच्या खालचा मजला नाही. U सम संख्या असलेल्या मजल्यावर राहतो पण Qच्या मजल्याच्या खाली राहत नाही. Uच्या खालच्या मजल्यावर राहणा-या व्यक्तींची संख्या Pच्या वर राहणा-या व्यक्तींच्या संख्येएवढी आहे. Qच्या वरचा मजला रिकामा आहे, पण तो Qच्या मजल्याला लागून नाही.
खालीलपैकी काय चूकीचे आहे?

DIRECTIONS: These questions are based on the following information.
Six persons P, Q, R, S, T, and U are living in a seven-storeyed building but not necessarily in the same order. Ground floor is considered the first floor and the floor above the ground floor is considered the second floor and so on. One floor is vacant in the given building. Two persons are living between R and T and neither of them lives either on the top floor or on the bottom floor. S lives two floors above P whose floor is not below the vacant floor. U lives on an even-numbered floor but not below Q's floor. The number of persons living below U's floor is equal to the number of persons living above P's floor. The vacant floor is above Q's floor but not adjacent to Q's floor.
Which of the following is/are definitely false?

ہدایات: یہ سوالات مندرجہ ذیل معلومات پر مبنی ہیں۔
ایک سات منزلہ عمارت میں رہتے ہیں لیکن لازمی طور پر یکساں ترتیب میں نہیں۔ گراؤنڈ فلور اور V سات افراد P، Q، R، S، T، U کو پہلا فلور مانا جاتا ہے اور گراؤنڈ فلور سے اوپر دوسرا فلور مانا جاتا ہے اور اسی طرح آگے۔ دی گئی عمارت میں ایک فلور خالی ہے۔ R اور T کے درمیان دو لوگ رہتے ہیں اور ان میں سے کوئی بھی سب سے اوپر کے فلور یا سب سے نچلے فلور پر نہیں رہتا ہے۔ S، P کے فلور Q ایک جفت عدد کے فلور پر رہتا ہے لیکن U سے دو فلور اوپر رہتا ہے جس کا فلور خالی فلور کے نیچے نہیں ہے۔ کے فلور سے اوپر رہنے والے لوگوں کی تعداد کے برابر ہے۔ P کے فلور سے نیچے رہنے والے لوگوں کی تعداد U کے نیچے نہیں۔ کے فلور سے ملا ہوا نہیں ہے۔ Q کے فلور کے اوپر ہے لیکن Q خالی فلور
مندرجہ ذیل میں سے کون یقینی طور پر غلط ہے/ہیں؟

A.T रिकाम्या मजल्याच्या लगेच खाली राहतो.
A.T lives immediately below the vacant floor.
A.T خالی فلور کے فوری نیچے رہتا ہے۔

For More Info And Videos About TAIT-Exam Syllabus And Other Exam Visit My Channel
TAIT च्या 30 प्रश्नपत्रिका PDF
BADSHAHimp Available Request 9765226781
WWW.YouTube.com/BADSHAHimp
Subscribe My Channel

B.R सहाव्या मजल्यावर राहतो.
B.R lives on the sixth floor.
B.R -چھٹے فلور پر رہتا ہے

C.U आणि P जवळच्या मजल्यांवर राहतात.
C.U and P live on adjacent floors.
C.U اور P -ملحقہ فلور پر رہتے ہیں

D.वरीलपैकी कोणतेही नाही
D.None of the above.
D.-اوپر میں سے کوئی نہیں

Answer: D.वरीलपैकी कोणतेही नाही
D.None of the above.
D.-اوپر میں سے کوئی نہیں

98 कोणते वय “का वय” असते

Which age is “why age”

کون سی عمر "وائی ایج" ہے

A.सुरुवातीचे बालपण
A.Early childhood
A.ابتدائی بچپن

B.तारुण्य
B.puberty
B.بلوغ

C.आनंद वय
C.joy age
C.جوائے ایج

D.प्रौढ
D.adult
D.بالغ

Answer: A.सुरुवातीचे बालपण
A.Early childhood
A.ابتدائی بچپن

For More Info And Videos About TAIT-Exam Syllabus And Other Exam Visit My Channel
TAIT च्या 30 प्रश्नपत्रिका PDF
BADSHAHimp Available Request 9765226781
WWW.YouTube.com/BADSHAHimp
Subscribe My Channel

99	4.2 × (3.6 × 1.0) = (3.6 × 4.2) × ? 4.2 × (3.6 × 1.0) = (3.6 × 4.2) × ? 4.2 × (3.6 × 1.0) = (3.6 × 4.2) × ?
	A.1 A.1 A.1
	B.0 B.0 B.0
	C.3.6 C.3.6 C.3.6
	D.4.2 D.4.2 D.4.2
Answer:	A.1 A.1 A.1

100	Out of the given options which best expresses the meaning of the given Proverb? Charity begins at home.
	A.You should take care of family and people close to you before you worry about helping others
	B.You should first help your friends and relatives living in distant lands, rather than helping the members of your family
	C.You should help only those people who stay far away from you or are not related to you in any way
	D.None of the above
Answer:	A.You should take care of family and people close to you before you worry about helping others

101

सूचना: कागदाच्या एक चौरस तुकड्याला प्रश्नातील (मुख्य) आकृतीत दाखविल्याप्रमाणे मध्यभागी दोन घड्या घातल्या व भोके पाडली तर तो उलगडल्यानंतर कसा दिसेल? उत्तरादाखल दिलेल्या A, B, C, आणि D पर्यायांमधून योग्य आकृती निवडा.

DIRECTIONS: If a square sheet of paper is folded two times from the centre and cuts are made as shown in the problem figure (or main figure) how will it appear when it is opened? Select the appropriate figure from the Answer Figures marked A, B, C, and D.

ہدایات: اگر کاغذ کے ایک چوکور شیٹ کو اس کے بیچ سے دو دفعہ موڑا جاتا ہے اور اسے مسئلہ کی تصویر (یا خاص تصویر) کے مطابق کاٹا جاتا ہے، تو کھولنے پر یہ کیسا نظر آئے گا؟ A، B، C، اور D کے طور پر لگائے گئے نشان والے جواب کی تصاویر میں سے مناسب تصویر کا انتخاب کریں۔

मुख्य आकृती
Main Figure
خاص تصویر

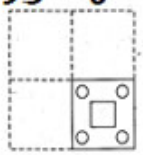

उत्तरासाठी पर्यायी आकृत्या
Answer Figures
جواب کی تصاویر

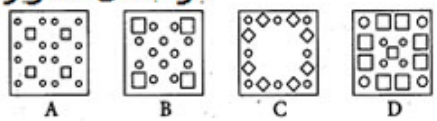

A. (A)

B. (B)

C. (C)

D. (D)

Answer: A. (A)

102

भावनात्मक प्रतिसादासोबत इतरांच्या भावनांवर प्रतिक्रिया देणे

Reacting to other's feelings with emotional response

دوسروں کے احساسات پر جذباتی جواب کے ساتھ ردعمل ظاہر کرنا _____ کہلاتا ہے۔

A.समानुभूती
A.Empathy
A.تعلق خاطر، لگاؤ

B.सहानुभूती
B.Sympathy
B.ہمدردی

C.भावहीनता
C.Apathy
C.لاتعلقی

D.यापैकी एकही नाही
D.None of these
D.ان میں سے کوئی نہیں

Answer: A.समानुभूती
A.Empathy
A.تعلق خاطر، لگاؤ

103 राम पूर्वेकडे 30 मी. चालला, उजवीकडे वळला आणि 40 मी. चालला. नंतर तो डावीकडे वळला आणि 30 मी.चालत गेला. आता तो सुरुवातीच्या बिंदूपासून कोणत्या दिशेला आहे?

Ram walked 30m towards East, took a right turn and walked 40m.Then he took a left turn and walked 30m. In which direction is he now from the starting point?

رام مشرق کی جانب30 میٹر تک چلتا ہے، پھر داہنی طرف مڑتا ہے اور40 میٹر تک چلا- پھر وہ بائیں طرف مڑا اور 30 میٹر تک چلا- اپنے ابتدائی پوائنٹ سے اب وہ کس سمت میں ہے؟

A.उत्तर पूर्व
A.North East
A.شمال مشرق

B.दक्षिण
B.South
B.جنوب

C.दक्षिण-पूर्व
C.South east
C.جنوب مشرق

D.पश्चिम
D.West
D.مغرب

Answer: C.दक्षिण-पूर्व
C.South east
C.جنوب مشرق

104 कोणती चुकीची जोडी आहे?

Which is incorrectly matched?

کون سی جوڑی غلط ہے؟

A.नियोजन आयोग – 1950
A.Planning Commission – 1950
A. 1950 - پلاننگ کمیشن

B.प्रथम सामान्य निवडनुक – 1951 – 52
B.First General Election – 1951 – 52
B. 1951 - 52 - پہلے عام انتخابات

C.गोव्याला राज्य बनवले – 1997
C.Goa was made a state – 1997
C. 1997 - گوا ایک ریاست بنا یا گیا

D.उत्तरांचलचा जन्म झाला – 2000
D.Uttaranchal is born – 2000
D.2000 - اترانچل پیدا ہوا

Answer: C.गोव्याला राज्य बनवले – 1997
C.Goa was made a state – 1997
C. 1997 - گوا ایک ریاست بنا یا گیا

105 DIRECTIONS: A sentence with an underlined word is given below. Find the Word which is most similar in meaning to the underlined word.
Arguing with Andrew is <u>futile</u> because he never changes his mind.

A.Useless

B.Useful

C.Nourishing

D.Inspiring

Answer: A.Useless

106 सरळ रूप द्या:
74156 – ? – 321 – 20 + 520 = 69894

Simplify:
74156 – ? – 321 – 20 + 520 = 69894

سادہ بنائیں:
74156 – ? – 321 – 20 + 520= ?

A.3451
A.3451
A.3451

B.4441
B.4441
B.4441

C.5401
C.5401
C.5401

D.4531
D.4531
D.4531

Answer: B.4441
B.4441
B.4441

107 भारतामधील महिला आणि पाल्य विकास मंत्री कोण आहेत?

Who is Minister of Women & Child Development in India?

عورتوں اور بچوں کے وزیر برائے ترقی ہیں۔

A.डी.व्ही.एस. गौडा
A.D.V.S. Gowda
A.ڈی وی ایس گوڈا

B.मेनका गांधी
B.Maneka Gandhi
B.مینکا گاندھی

C.अनंत गीता
C.Anant Geeta
C.اننت گپتا

D.निर्मला सीतारामन
D.Nirmala Seetharaman
D.نرملا سیتھارمن

Answer: B.मेनका गांधी
B.Maneka Gandhi
B.مینکا گاندھی

108 सूचना: खालील दिलेल्या प्रश्नामध्ये काही विधाने आणि काही निष्कर्ष आहेत. सामन्यात: ज्ञात तथ्यांपेक्षा ते वेगळे असतील तर दिलेली विधाने तुम्हाला सत्य मानवी लागतील आणि त्यानंतर दिलेल्या विधानाचे अनुकरण दिलेल्यापैकी कोणता निष्कर्ष तार्किकदृष्ट्या करतो ते ठरवा.

विधाने:
Y=T निष्कर्ष:
I. YII.G=F

DIRECTIONS: In the question given below, there are few statements followed by few conclusions. You have to take the given statements to be true even if they seem to be at variance with commonly known facts and then decide which of the given conclusion logically follow(s) from the given statements.

Statements:
Y = T < F ≥ G
Conclusions:
I. Y < F
II. G = F

ہدایات: مندرجہ ذیل سوال میں، کچھ بیانات کے بعد کچھ نتائج موجود ہیں. اگر آپ کو عام طور پر جانے جاتے حقائق کے ساتھ بھی متغیر ہونے لگے تو بھی آپ دئے گئے بیانات دماغ میں رکھیں اور پھر اس بات کا فیصلہ کریں کہ ذیل میں دیا گیا کونسا نتیجہ منطقانہ طور پر دیے گئے بیانات کی پیروی کرتا ہے.

بیانات:
Y=T نتائج:
YG=F .II

A.तर फक्त I निष्कर्ष खरा आहे
A.If only Conclusion I is true
A.اگر صرف I نتیجہ درست ہے

B.तर फक्त I निष्कर्ष खरा आहे
B.If only Conclusion II is true
B.اگر صرف نتیجہ II درست ہے

C.तर I किंवा II यापैकी एक निष्कर्ष खरा आहे
C.If either Conclusion I or II is true
C.اگر I اور II نتائج میں سے ایک درست ہے

D.तर I व II हे दोन्हीही निष्कर्ष खरे नाहीत
D.If neither Conclusion I nor II is true
D.اگر I اور II نتائج میں سے کوئی بھی درست نہیں

Answer: A.तर फक्त I निष्कर्ष खरा आहे
A.If only Conclusion I is true
A.اگر صرف I نتیجہ درست ہے

109 निर्देश: मालिका पूर्ण करा

ADG, ?, SVY, BEH

DIRECTION: Complete the series

ADG, ?, SVY, BEH

ہدایت اس سرج کو مکمّل کرو

ADG, ?, SVY, BEH

A.KMP
A.KMP
A.KMP

B.JNP
B.JNP
B.JNP

C.JMP
C.JMP
C.JMP

D.KNP
D.KNP
D.KNP

Answer: C.JMP
C.JMP
C.JMP

110 एका शिक्षकाचे कार्य प्रामुख्याने असते कि-

The function of a teacher primarily is that of a-

ایک استاد کا بنیادی کام یہ ہے کہ

A.सेवा-केंद्र कर्मचारी, विद्यार्थ्यांना ज्ञानाची माहिती करून देणे
A.Service-station attendant, filling students with knowledge
A.سروس اسٹیشن کی ذمہ داری، طالب علم کو علم کے ساتھ بھرنا

B.मंत्री, मुलांच्या वैयक्तिक व आध्यात्मिक गरजा भागविण्यासाठी
B.Minister, tending to the personal and spiritual needs of children
B.وزیر، بچوں کی ذاتی اور روحانی ضروریات پر توجہ

C.मार्गदर्शन, मुलाला त्याच्या सर्वांगीण वाढीकरिता मदत करणे
C.Guide, helping the child progress toward maximum growth
C.رہنمائی، بچے کی زیادہ سے زیادہ ترقی کی طرف بڑھنے میں مدد

D.संचालक, वर्गाच्या फायद्यासाठी अनुभवांचे आयोजन व नियोजन करणे
D.Director, organizing and planning worthwhile experiences for the class
D.ڈائریکٹر، کلاس کے لئے قابل قدر تجربات کا انتظام اور منصوبہ بندی

Answer: C.मार्गदर्शन, मुलाला त्याच्या सर्वांगीण वाढीकरिता मदत करणे
C.Guide, helping the child progress toward maximum growth
C.رہنمائی، بچے کی زیادہ سے زیادہ ترقی کی طرف بڑھنے میں مدد

111 निंदा करणारा -

A.शाहीर

B.भक्त

C.निंदक

D.भाट

Answer: C.निंदक

112 **सूचना**: दिलेल्या पर्यायांमधून कोणती आकृती प्रश्न-आकृतीमधील श्रेणी पूर्ण करणारी योग्य आकृती आहे?

Which answer figure completes the pattern given in the question figure?

جواب کی کون سی تصویر دئے گئے سوال کی تصویر کے پیٹرن کو مکمل کرتی ہے؟

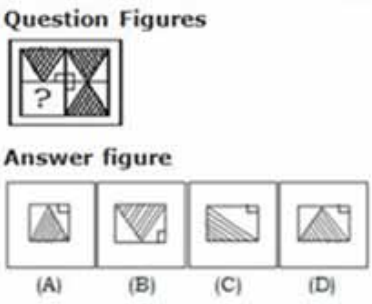

A. (A)

B. (B)

C. (C)

D. (D)

Answer: A. (A)

113 निर्देश: खालील व्यवस्था काळजीपूर्वक वाचा आणि खाली दिलेल्या प्रश्नांची उत्तरे द्या.

4 K % R T 3 E P # A 7 B 9 D I Q @ 2 8 V U © H J 5 F 1 % 6 M W

खालील पाचपैकी चार, वरील व्यवस्थेत आपल्या पोझिशन्सच्या आधारावर विशिष्ट प्रकारे एकसारखे आहेत आणि त्यामुळे एक गट तयार करतो. खालील पर्याया पैकी कोणता गट त्या गटातील सदस्य नाही?

DIRECTIONS: Study the following arrangement carefully and answer the questions given below.

4 K % R T 3 E P # A 7 B 9 D I Q @ 2 8 V U © H J 5 F 1 % 6 M W

Four of the following five, are alike in a certain way based on their positions in the above arrangement and so form a group. Which is the one that does not belong to that group?

ہدایت نیچے دی گی ترتیب کو پڑھئے اور سہی جواب دیجئے

4 K % R T 3 E P # A 7 B 9 D I Q @ 2 8 V U © H J 5 F 1 % 6 M W

اپری ترتیب کا جایجا لیا جائے تو اختیارات سے چار میں سے ٹن ایسے حرف نشان نمرس ہیں کنمے کوئی رابطہ ہیں آپکو بنا رابطہ والا حرف، نشان ان اختریت مے سے کھوجنا ہیں .

A.2VQ
A.2VQ
A.2VQ

B.JF©
B.JF©
B.JF©

C.165
C.165
C.165

D.TP%
D.TP%
D.TP%

Answer: D.TP%
D.TP%
D.TP%

114	जर '*' म्हणजे '×', '#' म्हणजे '–', '@' म्हणजे '÷' आणि '$' म्हणजे '+', तर 25 # 5 $ 3 * 4 @ 6 = ? If '*' means '×', '#' means '–', '@' means '÷' and '$' means '+', then 25 # 5 $ 3 * 4 @ 6 = ? اگر '*' مطلب '×'، '#' مطلب '–'، '@' مطلب '÷' اور '$' مطلب '+'، تو 25 # 5 $ 3 * 4 @ 6 = ?
	A. 12
	B. 15.3
	C. 22
	D. 8
Answer:	C. 22

115	सामाजिकीकरनाच्या टप्प्यांची सुरुवात- The stage of beginning of socialization process is— معاشرتی عمل کے آغاز کا مرحلہ ہے-
	A.अर्भकावस्था A.Infancy A.شیرخوارگی
	B.बालपण B.Childhood B.بچپن
	C.प्रौढावस्था C.Adulthood C.بلوغت
	D.वृद्धावस्था D.Senile stage D.سینائل مرحلہ
Answer:	A.अर्भकावस्था A.Infancy A.شیرخوارگی

116	जर x^5= 243 तर x=? If X^5=243 then x=? 243 اگر= x^5 پھر x=?
	A.25 A.25 A.25
	B.3 B.3 B.3
	C.10 C.10 C.10
	D.15 D.15 D.15
Answer:	B.3 B.3 B.3
117	कुटुंबे किंवा संबंधित स्वत्व यासाठी दुसरे नाव आहे Familiar or relational self are other names for فملیار یا ریشنل سیلف یہ _____ کے دوسرے نام ہیں۔
	A.व्यक्तीगत स्वत्व A.Personal self A.پرسنل سیلف) خود پرستی)
	B.आत्म–संकल्पना B.Self–concept B.سیلف کنسپٹ) خود ارتکازی)
	C.स्वाभिमान C.Self–esteem C.سیلف اسٹیم) نفس پرستی، حبّ ذات)
	D.सामाजिक स्वत्व D.Social self D.سوشل سیلف) سماجی عرفان)

Answer: D.सामाजिक स्वत्व
D.Social self
D.سماجی عرفان (سوشل سیلف)

118 अंतर वैयक्तिक बुद्धिमत्ता आहे

Intra personal intelligence is

انٹرا پرسنل ذہانت ہے:

A.व्यक्तीच्या भावना, हेतू आणि इच्छांबद्दल जागरूकता.
A.Awareness of one's own feelings, motives and desires.
A.کسی آدمی کی اپنے احساسات، محرکات اور خواہشات کے تئیں بیداری

B.हे एखाद्याच्या आंतरीक सामर्थ्य आणि मर्यादांना निर्देशित करते.
B.This refers to the knowledge of one's internal strengths and limitations.
B.اس کا تعلق کسی آدمی کی اپنے داخلی قوت اور حد بندیوں کی معلومات سے ہے

C.यापैकी एकही नाही
C.None of these
C.ان میں سے کوئی نہیں

D.(a) आणि (b) दोन्ही
D.Both (a) and (b)
D.الف اور ب دونوں

Answer: D.(a) आणि (b) दोन्ही
D.Both (a) and (b)
D.الف اور ب دونوں

119 अब्राहाम लिंकन _____या रोगापासून ग्रस्त होते.

Abraham Lincoln suffered from

ابراہم لنکن شکار تھے:

A.वाचन अक्षमता
A.Dyslexia
A. پڑھنے کی اہلیت میں کمی

B.गंभीर वैद्यकीय उदासिनता
B.Severe clinical depression
B.شدید کلینکل تناؤ

C.आक्रमकता
C.Aggression
C.جارحیت

D.स्मृतिभ्रंश
D.Dementia
D.فتور دماغ

Answer: B.गंभीर वैद्यकीय उदासिनता
B.Severe clinical depression
B.شدید کلینکل تناؤ

120 वर्गात प्रत्यक्ष प्रदर्शित करण्याअगोदर रंगीत तालीम करणे का महत्वाचे आहे?

What is the importance of rehearsal before actual demonstration carried out in the class room?

کلاس روم میں اصل مظاہرہ کئے جانے سے قبل ریہرسل کی کیا اہمیت ہے؟

A.त्याने शिक्षकामध्ये आत्म विश्वास निर्माण होतो
A.It creates self-confidence in a teacher
A.یہ ایک استاد میں خود اعتمادی پیدا کرتا ہے

B.शिक्षकास वर्गप्रयोगादरम्यान वर्गात बऱ्याच अडचणींशी परिचय होतो
B.The teacher becomes familiar with the difficulties which many occur during experimentation in the classroom conditions
B.استاد ان مشکلات سے واقف ہوسکتا ہے جس میں کلاس روم کے حالات میں استعمال ہونے کے دوران کئی مرتبہ واقع ہو سکتی ہیں

C.शिक्षक एका परिपूर्ण पद्धतीने वर्गप्रयोग प्रदर्शित करते
C.The teacher performs the experiment’s demonstration in a perfect fashion
C.استاد ایک بہترین فیشن میں تجربہ کے مظاہرے انجام دیتا ہے

D.वरील सर्व
D.All the above
D.مذکورہ تمام

Answer: D.वरील सर्व
D.All the above
D.مذکورہ تمام

121 जर एक संख्येने दुसऱ्या संख्येला भाग दिला तर भागाकार 3/5 येतो, जर फरक 28 असेल, तर या दोनपैकी मोठी संख्या कोणती आहे?

If a number is divided by another number the division is 3/5, if their difference is 28, which is the bigger number of the two?

اگر ایک عدد کو دوسرے سے تقسیم کیا جائے تو تقسیم3/5 ہو تی ہے اور ان کا فرق 28 ہو تو دونوں میں سے بڑا عدد کیا ہے؟

A.35
A.35
A.35

B.140
B.140
B.140

C.70
C.70
C.70

D.84
D.84
D.84

Answer: C.70
C.70
C.70

122 ‘ नाकी नऊ येणे ‘ या वाक्प्रचाराचा अर्थ काय ?

A.नापसंती दाखविणे

B.नक्षा उतरणे

C.बढाया मारणे

D.एखादे काम करताना अतिशय श्रम, दु:ख होणे

Answer: D.एखादे काम करताना अतिशय श्रम, दु:ख होणे

123	कोन हा स्वत:चा परिपूरक आहे. कोन काढा. An angle is its own compliment. Find the angle. ایک زاویہ خود کا کمپلیمنٹ ہے۔ زاویہ تلاش کریں۔
	A.35° A.35° A.35°
	B.45° B.45° B.45°
	C.60° C.60° C.60°
	D.75° D.75° D.75°
Answer:	B.45° B.45° B.45°
124	_____म्हणजे ज्ञान संपादन करण्याची व ते लागू करण्याची क्षमता _____ is the capacity to acquire and apply knowledge _____ حاصل کرنے اور نافذ کرنے کی اہلیت ہے
	A.व्यक्तिमत्व A.Personality A.شخصیت
	B.बुद्धिमत्ता B.Intelligence B.ذہانت
	C.योग्यता C.Aptitude C.رغبت
	D.वृत्ती D.Attitude D.رویہ

Answer: B.बुद्धिमत्ता
B.Intelligence
B.ذہانت

125 निर्देश: खालील प्रश्नांमध्ये प्रश्न चिन्हाच्या (?) जागी कोणते अंदाजे मूल्य यायला हवे?
5891÷14+589−111=?

DIRECTIONS: What approximate value should come in the place of question mark (?) in the following equations.

5891÷14+589−111=?

ہدایات: مندرجہ ذیل سوال میں سوال کا نشان (?) کی جگہ پر کون سا تخمینہ ویلیو آئے گا -
5891÷14+589−111=?

A.900
A.900
A.900

B.990
B.990
B.990

C.810
C.810
C.810

D.820
D.820
D.820

Answer: A.900
A.900
A.900

126 खालील आकृतीमध्ये एकूण किती वर्तुळे आहेत?

How many circles are there in the following figure?

مندرجہ ذیل تصویر میں کتنے مُثَلَّث ہیں؟

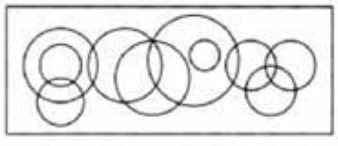

A. 12

B. 14

C. 13

D. 10

Answer: D. 10

127 सूचना: अर्थपूर्ण परिच्छेद निर्माण करण्यासाठी, खाली दिलेली (P), (Q) (R), (S) आणि (T) ही पाच वाक्ये योग्य अनुक्रमाने पुनर्रचना करा; त्यांनतर खालील प्रश्नांची उत्तर द्या.

P. एका उंदराने आपली झोपमोड केल्याने सिंहाला खूप राग आला आणि तो त्या उंदराला आपल्या पंजाने मारणारच होता.
Q. उंदराने लगेच आपल्या टोकदार दातांनी जाळे कुरतडून टाकले आणि सिंहाची सुटका केली.
R. एक सिंह जंगलात गाढ झोपलेला असताना एक उंदीर त्याच्या अंगावर खेळत होता.
S. त्यानंतर लगेचच एका शिकाऱ्याच्या जाळ्यात सिंह अडकला आणि तेथून जाणाऱ्या उंदराने सिंहाला पहिले.
T. एक दिवस मी नक्की मदत कारेन, असे सांगत उंदराने माफी करण्याची विनंती सिंहाला केली. त्या विचाराने सिंहाला हसू आले आणि तो निघून गेला.

पुनर्रचना केल्यानंतर खालीलपैकी कोणते वाक्य पहिले असेल?

DIRECTION: Rearrange the following five sentences (P), (Q), (R), (S) and (T) in the proper sequence to form a meaningful paragraph; then answer the questions given below them.
P. The lion was angry that the mouse disturbed its sleep and was about to kill it with its paw.
Q. The mouse immediately tore the net with its sharp teeth and rescued the lion.
R. A lion was fast asleep in the jungle when a mouse started running all over him.
S. Soon after that, the lion was trapped in a hunter’s net, and the little mouse was passing by and saw the lion.
T. When the mouse begged the lion to pardon it, saying it could be of help to it one day, the lion laughed at that thought and walked away.

Which of the following should be the FIRST sentence after rearrangement?

ہدایات: ان پانچ جملوں (P)، (Q)، (R)، (S) اور (T) کو با معنی پیرا بنانے کے لئے دوبارہ ترتیب دیجئے، پھر نیچے دے گئے سوالوں کے جواب دیجئے

P. شیر گسصہ تھا کہ چونچے نے اسکی نیند خراب کی اور اپنے پنجے سے اسکو مارنے والا تھا.
Q. چونھے نے جلدی سے اپنے تیز دانتوں سے جال کو کاٹا اور شیر کو بچایا.
R. شیر جنگل میں گہری نیند سو رہا تھا جب ایک چونہا اسکے اپر چلنے لگا.
S. اسکے بعد، شیر شکاری کے جال میں پھنس گیا، اور چھوٹا چونہا وہاں سے گزر رہا تھا اورشیر کو دیکھا.
T. جب چونہا شیر سے معافی مانگ رہا تھا، یہ کہکر کہ وو ایک دن اسکی مدد کریگا، شیر نے اسپر ہنسا اور بھاگ گیا.

دوبارہ ترییب دینے کے بعد کون سا جملہ پہلے ہونا چاہیے؟

A.R
A.R
A.R

B.Q
B.Q
B.Q

C.S
C.S
C.S

D.T
D.T
D.T

Answer: A.R
A.R
A.R

128 भारताचा राष्ट्रीय वृक्ष कोणता आहे?

Which is the National tree of India?

بھارت کا قومی پیڑ ہے۔

A.बड झाड
A.Banyan tree
A.برگد کا پیڑ

B.पिंपक झाड
B.Peepal tree
B.پیپل کا پیڑ

C.आंबा झाड
C.Margo tree
C.مارگو کا پیڑ

D.यांपैकी कोणतेही नाही
D.None of these
D.ان میں سے کوئی نہیں

Answer: A.बड झाड
A.Banyan tree
A.برگد کا پیڑ

129 एक व्यक्ती स्थिर पाण्यामध्ये 5 किमी/तास या गतीने नौकाविहार करु शकतो. जर त्याने विशिष्ट बिंदूपासून प्रवाहाविरुध्द नौकाविहार केला आणि 2 किमी/तास प्रवाहित होणाऱ्या नदीमध्ये सुरूवातीच्या बिंदूवर पोहचला तर संपूर्ण प्रवासासाठी व्यक्तीची सरासरी गती:

A man can row at a speed of 5 km/hr in still water. If he row to a certain point in upstream and back to the starting point in a river which flows at 2 km/hr then average speed of the man for total journey is:

ایک آدمی روکے ہوئے پانی میں 5 کلومیٹر / گھنٹہ کی رفتار سے تیراکی کر سکتا ہے. اگر وہ ایک دریا جو کہ 2 کلومیٹر / گھنٹہ پر بہتا ہے ، میں ایک مخصوص مقام تک مخالف سمت میں اور پھر واپس ابتدائی مقام تک تیراکی کرے تو کل سفر کے لئے آدمی کی اوسط رفتار ہے:

(A) $3\frac{1}{5}$ km/hr/ किमी/तास/ کلو میٹر فی گھنٹہ

(B) $5\frac{1}{6}$ km/hr/ किमी/तास/ کلو میٹر فی گھنٹہ

(C) $3\frac{1}{6}$ km/hr/ किमी/तास/ کلو میٹر فی گھنٹہ

(D) $4\frac{1}{5}$ km/hr/ किमी/तास/ کلو میٹر فی گھنٹہ

Answer: (D) $4\frac{1}{5}$ km/hr/ किमी/तास/ کلو میٹر فی گھنٹہ

130 सूचना: खालील प्रश्नांमध्ये दिलेल्या पर्यायांमधून संबंधित अक्षर/शब्द/संख्या निवडा.

9 : 26 : ?

DIRECTIONS: In the following question, select the related letter/word/number from the given alternatives.

9 : 26 : ?

سمت: مندرجہ ذیل سوال میں، دیے گئے متبادل سے متعلقہ حرف/لفظ/نمبر منتخب کریں۔

9 : 26 : ?

A.7 : 22
A.7 : 22
A.7 : 22

B.11 : 31
B.11 : 31
B.11 : 31

C.10 : 21
C.10 : 21
C.10 : 21

D.8 : 23
D.8 : 23
D.8 : 23

Answer: D.8 : 23
D.8 : 23
D.8 : 23

131 बुद्धिमत्ता खालील संयोजनाचा परिणाम आहे

Intelligence is a result of combination

ذہانت مجموعہ کا نتیجہ ہے

A.अन्नाचा पर्यावरणाशी
A.Food to Environment
A.ماحولیات کی غذا

B.हवामान आणि वंशपरंपरा
B.Climate and Heredity
B.آب و ہوا اور موروثی

C.जन्मक्रमाचा वंशपरंपरेशी
C.Birth Order to Heredity
C.پیدائش کی ترتیب سے موڑوثی تک

D. पर्यावरणाचा वंशपरंपरेशी
D.Environment to Heredity
D.ماحولیات سے موروثی تک

Answer: D. पर्यावरणाचा वंशपरंपरेशी
D.Environment to Heredity
D.ماحولیات سے موروثی تک

132

सूचना: दिलेल्या पर्यायांमधून श्रेणी पूर्ण करणारी योग्य आकृती निवडा.

DIRECTIONS: Complete the series by choosing right figure from the given choices.

ہدایات: دئے گئے انتخابات میں سے صحیح تصویر کو منتخب کرکے سلسلہ مکمل کریں۔

Problem Figures

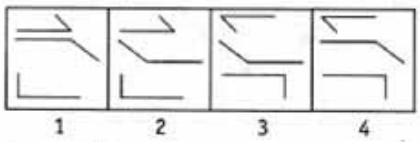

Answer Figures

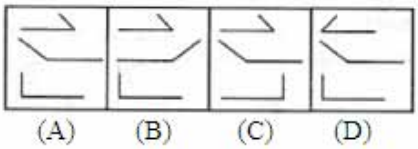

A. (A)

B. (B)

C. (C)

D. (D)

Answer: A. (A)

133 जर पोलादाला लाकूड म्हटले, लाकडाला कोबाल्ट म्हटले, कोबाल्टला सोने म्हटले, सोन्याला प्लास्टीक म्हटले. तर आपल्याला झाडांपासून काय मिळते?

If steel is called wood, wood is called cobalt, cobalt is called gold, gold is called plastic. What do we get from trees?

اگر فولاد کو لکڑی، لکڑی کو کوبالٹ، کوبالٹ کو سونا، سونے کو پلاسٹک کہا جائے تو، درخت سے ہم کیا حاصل کرتے ہیں؟

A.प्लास्टीक
A.Plastic
A.پلاسٹک

B.लोखंड
B.Iron
B.لوہا

C.कोबाल्ट
C.Cobalt
C.کوبالٹ

D.सोने
D.Gold
D.سونا

Answer: C.कोबाल्ट
C.Cobalt
C.کوبالٹ

134 भारतीय परिस्थितीमध्ये चांगल्या शिक्षणाचा पाया आहे-

The foundation of a good teaching in Indian circumstances is—

بھارتی حالات میں اچھی تعلیم کی بنیاد ہے-

A.लोकशाहीची मुल्ये
A.Democratic values
A.جمہوری اقدار

B.विद्यार्थ्यांच्या क्षमतेत वाढ
B.Enrichment of student's potentialities
B.طالب علم کی صلاحیتوں کا تعارف

C.शिक्षक- एक तत्वज्ञानी व एक मित्र म्हणून
C.Teacher - a philosopher and a friend
C.ٹیچر - فلسفی اور دوست

D.वरील सर्व
D.All the above
D.مذکورہ تمام

Answer: D.वरील सर्व
D.All the above
D.مذکورہ تمام

135 जर आपल्या विद्यार्थ्याचा अपघात झाला आहे व त्याच्या पायाच्या घोट्याचा हाड मोडला आहे. असे कळून येते कि तो खेळाच्या तासात भाग घेण्यास पात्र नाही, तो आपल्याला विंनती करत आहे कि त्यावेळी बाहेर बसण्यास मान्य करावे. आपण त्याला काय सुचवाल?

If your student met with an accident and fractured his ankle bone. In view of his incapability to join the games period, he requests you to spare him for the time being. What will you suggest him?

اگر آپ کا طالبعلم حادثے سے دوچار ہو اور اس کی گھٹنے کی ہڈی ٹوٹ جائےکھیل میں شریک ہونے سے اپنی معذوری کے پیش نظر وہ آپ سے اس وقت میں الگ ہونے کی درخواست کرتا ہے۔ تم اسے کیا مشورہ دو گے

A.प्राचार्याकडे जा व विनंती कर
A.Go and make a request to the principal
A.جاؤ اور پرنسپل کو درخواست کرو

B.खेळण्यासाठी मैदानात जाण्याची गरज नाही- शिक्षकाला त्याच्या अपघातबद्दल काहीच माहित नाही
B.No need to go to play ground as games- teacher is ignorant of his accident
B.کھیل کھیلنے کے لئے میدان جانے کی کوئی ضرورت نہیں کیونکہ کھیلوں کا استاد اس کے حادثے سے ناواقف ہے

C.लिखित वैद्यकीय प्रमाणपत्राच्या सहाय्याने खेळ शिक्षक व प्राचार्य दोघांना कळवा
C.Inform the games teacher and the principal both in writing with medical certificate
C.میڈیکل سرٹیفکیٹ کے ساتھ تحریرمیں کھیل کے استاد اور پرنسپل دونوں کو مطلع کریں

D.काय करावे हे त्याला चांगल्या प्रकारे माहित आहे
D.To do as he thinks better.
D.جو اسے بہتر لگے وہ کریں

Answer: C.लिखित वैद्यकीय प्रमाणपत्राच्या सहाय्याने खेळ शिक्षक व प्राचार्य दोघांना कळवा
C.Inform the games teacher and the principal both in writing with medical certificate
C.میڈیکل سرٹیفکیٹ کے ساتھ تحریرمیں کھیل کے استاد اور پرنسپل دونوں کو مطلع کریں

136

सूचना: खालील प्रश्नात उत्तरातील पर्यायांपैकी कोणत्या पर्यायी आकृतीत प्रश्नातील आकृती अंतर्भूत आहे?

DIRECTIONS: In the given question find the answer figure in which question figure is embedded.

ہدایات: دئے گئے سوال میں جواب کی اس تصویر کو تلاش کریں جس میں سوالات کی تصویرمنسلک ہے-

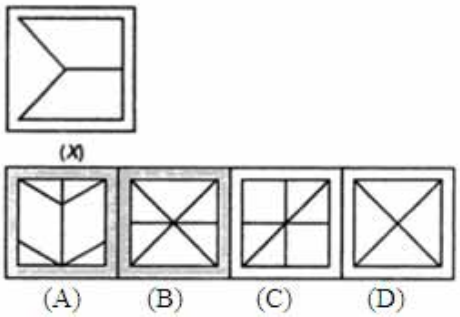

A. (A)

B. (B)

C. (C)

D. (D)

Answer: B. (B)

137	खालीलपैकी कोणता धातू निसर्गाच्या मुक्त स्थितीमध्ये आढळते? Which of the following metal is found in Free State in nature? مندرجہ ذیل میں سے کونسا دھات قدرت کے فری اسٹیٹ میں پائے جاتے ہیں؟
	A.अल्युमिनियम A.Aluminum A.الومینیم
	B.सोने B.Gold B.سونا
	C.लोह C.Iron C.لوہا
	D.शिस D.Lead D.لیڈ
Answer:	B.सोने B.Gold B.سونا

138	Out of the four alternatives, choose the one which can be substituted for the given words/sentence. Not connected with religious or spiritual matters.
	A.Secular
	B.Veteran
	C.Cosmopolitan
	D.Herculean
Answer:	A.Secular

139	18 कॅरेट सोन्यामध्ये शुद्ध सोन्याचे प्रमाण इतके असते — The ratio of pure gold in 18 carat gold is — 18 کراٹ سونے میں خالص سونے کا تناسب _____ ہوتا ہے۔
	A.1 A.1 A.100 فیصد
	B.0.8 B.0.8 B.80 فیصد
	C.0.75 C.0.75 C.75 فیصد
	D.0.6 D.0.6 D.60 فیصد
Answer:	C.0.75 C.0.75 C.75 فیصد
140	‘ बोजड ‘ या शब्दाचा समानार्थी शब्द कोणता ?
	A.आटोपशीर
	B.अवजड
	C.सुटसुटीत
	D.बेतशीर
Answer:	B.अवजड
141	येन हे _____ चे चलन आहे – Yen is the currency of - ین (Yen) کرنسی ہے -

A.चीन
A.China
A.چائنا کی

B.दक्षिण कोरीया
B.South Korea
B.جنوبی کوریہ کی

C.व्हिएतनाम
C.Vietnam
C.ویتنام کی

D.जपान
D.Japan
D.جاپان کی

Answer: D.जपान
D.Japan
D.جاپان کی

142 जर्मन सिल्वरमध्ये खालीलपैकी काय नसते?

Which of the following is not contained by the German silver?

مندرجہ ذیل میں سے کیا جرمن سلور میں نہیں ہوتا ہے؟

A.तांबे
A.Copper
A.تانبا

B.निकेल
B.Nickel
B.نیکل

C.चांदी
C.Silver
C.سلور

D.झिंक
D.Zinc
D.زنک

Answer: C.चांदी
C.Silver
C.سلور

143	खालीलपैकी अशुद्ध शब्द कोणता ?
	A.चिप्पड
	B.चिपळी
	C.चिपड
	D.चीलूट
Answer:	D.चीलूट

144	एका विशिष्ट सांकेतिक भाषेमध्ये, जर INFER = 25 आणि JERSEY = 28 असा कूटबध्द केला जात असेल, CHOICE =? In a certain code language, if INFER = 25 and JERSEY = 28, then CHOICE =? ایک مخصوص ضابطے کی زبان میں، اگر INFER = 25 اور JERSEY = 28 تو CHOICE=?
	A.34 A.34 A.34
	B.39 B.39 B.39
	C.41 C.41 C.41
	D.47 D.47 D.47
Answer:	A.34 A.34 A.34

145 सूचना : खालील प्रत्येक प्रश्नात दोन विधाने I आणि II दिलेले आहेत. हे विधान एकतर स्वतंत्र कारण असू शकतात किंवा स्वतंत्र कारणांचे परिणाम असू शकतात. यांपैकी एक विधान इतर विधानाचा परिणाम असू शकतो. दोन्ही विधाने वाचा आणि खालीलपैकी कोणत्या उत्तराचा पर्याय या दोन्ही विधानांमधील संबंधांचे वर्णन करतो ते ठरवा.

विधान :
I. महाराष्ट्रामध्ये पशू खाद्य खरेदी करणे अवघड आणि महागडे ठरत आहे.
II. महाराष्ट्रात गेल्या तीन वर्षांपासून अपुरा पाऊस झालेला आहे.

DIRECTIONS: Below in each question are given two statements I and II. These statements may be either independent causes or may be effects of independent causes. One of these statements may be the effect of the other statement. Read both the statements and decide which of the following answer choice correctly depicts the relationship between these two statements.

Statements:
I. Procuring animal feed is going to be a difficult and expensive task in Maharashtra.
II. There has been inadequate rain all for the last three years in Maharashtra.

ہدایات: نیچے ہر سوال میں دو بیانات I اور II آزاد وجوہات یا پھر آزاد وجوہات کے اثرات ہو سکتے ہیں۔ انہیں گئے ہیں۔ یہ بیانات یا تو
بیانات میں سے ایک بیان دوسرے کا اثر ہو سکتا ہے۔دونوں بیانات پڑھیں اور فیصلہ کریں کہ نیچے دیے گئے کس جواب کا انتخاب ان
دونوں بیانات کے در میان تعلق کو ٹھیک سے ظاہر کرتا ہے۔

بیانات:
I – مہاراشٹرا میں جانوروں کا چارہ حاصل کرنا ایک مہنگا اور مشکل کام بن گیا ہے۔
II مہاراشٹرا میں پچھلے تین سال سے ناکافی بارش ہوئی ہے۔

A.विधान I कारण आहे आणि विधान II त्याचा परिणाम आहे;
A.Statement I is the cause and statement II is its effect;
A.بیان نمبر I وجہ ہے اور بیان نمبر II اس کا اثر ہے۔

B.विधान II कारण आहे आणि विधान I त्याचा परिणाम आहे;
B.Statement II is the cause and statement I is its effect;
B.بیان نمبر II وجہ ہے اور بیان نمبر I اس کا اثر ہے۔

C.विधान I आणि II दोन्ही स्वतंत्र कारणे आहेत;
C.Both the statements I and II are independent causes;
C.دونوں بیانات نمبر I اور نمبر II آزاد وجوہات ہیں۔

D.विधान I आणि II दोन्ही काही सामान्य कारणांचे परिणाम आहेत;
D.Both the statements I and II are effects of independent causes;
D.دونوں بیانات نمبر I اور نمبر II آزاد وجوہات کے اثرات ہیں۔

Answer: B.विधान II कारण आहे आणि विधान I त्याचा परिणाम आहे;
B.Statement II is the cause and statement I is its effect;
B.بیان نمبر II وجہ ہے اور بیان نمبر I اس کا اثر ہے۔

146 DIRECTIONS: A sentence with an underlined phrasal verb is given below. Out of the four options, choose the one which can be substituted for the given phrasal Verb.
Being trained abroad, he puts his ideas across convincingly.

A.hides

B.refuses

C.steals

D.conveys

Answer: D.conveys

147 विधान:
अनिताने बंटीला वर्गातच गैरवर्तन केल्याचा आरोप केला आहे. पोलिसांनी तक्रार दिली आहे.

कृतीचा कोर्स:
I. अनिताला शिक्षा व्हावी.
II. बंटीला शिक्षा व्हावी.

Statement:
Anita has accused Bunty of misbehaving with her in class. A complaint has been registered by the police.
Course of actions:
I. Anita should be punished.
II. Bunty should be punished.

بیان:
انیتا نے بنٹی پر کلاس میں بد سلوکی کا الزام لگایا ہے۔ پولیس نے شکایت درج کر لی ہے۔

لائحہ عمل:
I۔انیتا کو سزا دی جانی چاہیے۔
II۔ بنٹی کو سزا دی جانی چاہیے۔

A.फक्त I अनुसरून आहे
A.Only I follows
A. صرف I لاگو ہو گا۔

B.फक्त II अनुसरण करते आहे
B.Only II follows
B. صرف II لاگو ہو گا۔

C.एकतर I किंवा II अनुसरून आहे
C.Either I or II follows
C. I یا II میں سے ایک لاگو ہو گا۔

D.I किंवा II दोन्हीपैकी काहीही अनुसरण करत नाही
D.Neither I nor II follows
D. I اور II میں سے کوئی بھی لاگو نہیں ہو گا۔

Answer: B.फक्त II अनुसरण करते आहे
B.Only II follows
B. صرف II لاگو ہو گا۔

148 ‘ ईश्वरेच्छा ’ या शब्दाची संधी सोडवा.

A.ईश्वर + इच्छा

B.इश्वर + इच्छा

C.इश्वर + ईच्छा

D.ईश्वर + ईच्छा

Answer: A.ईश्वर + इच्छा

149 कळीची (मुख्य) आकृती घड्याळाच्या दिशेने किंवा विरुद्ध दिशेने (दिशादर्शक बाण दर्शवितो आहे त्याप्रमाणे) 90^0 फिरविली. दिलेल्या चार पर्यायी आकृत्यांमधील कोणती आकृती या फिरविलेल्या कळीच्या आकृतीचे प्रतिनिधित्व करते आहे?

When the key figure is rotated one step clockwise OR anticlockwise (depending upon the direction of arrow shown), which of the Answer figures given will represent the main figure in the rotated form?

جب کسی مخصوص تصویر کو گھڑی کی چال کی سمت میں یا گھڑی کی چال کی الٹی سمت میں (گھڑی کی سمت کی طرف اشارہ کرنے والے تیر پر منحصر) ایک قدم گھمایا جاتا ہے، تو دئے گئے جواب کی تصاویر میں سے کون خاص تصویر میں گھمائی گئی شکل کی نمائندگی کریگا؟

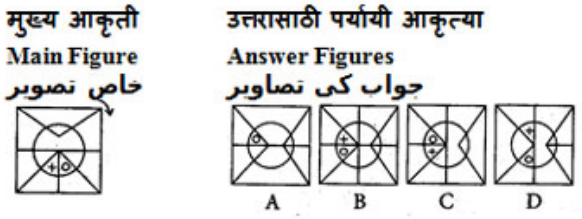

A. (A)

B. (B)

C. (C)

D. (D)

Answer: B. (B)

150 जुन्या पुस्तकाची पानं भुरकट रंगाची होतात कारण-

Paper of old books turns to brownish color due to-

پرانی کتابوں کا کاغذ _____ کی وجہ سے سانولا ہو جاتا ہے۔

A.पुस्तकाचा सतत वापर
A.Continue use of book
A.کتاب کے مسلسل استعمال

B.धुळीमुळे
B.Due to dust
B.دھول کی وجہ سے

C.सेल्युलोजचे ऑक्सिडिकरण
C.Oxidation of cellulose
C.سیلولائڈ کے آکسیڈیشن

D.वायुजीवनाची कमी
D.Lack of ventilation
D.وینٹیلیکشن کے فقدان

Answer: C.सेल्युलोजचे ऑक्सिडिकरण
C.Oxidation of cellulose
C.سیلولائڈ کے آکسیڈیشن

151 एका घनाला रंगवून किमान शक्य संख्येचे काप करून 216 लहान पण एकसारख्या तुकड्यांमध्ये कापले गेले आहे. घन कापण्यासाठी आवश्यक असलेल्या कापांची किमान संख्या काय आहे ?

A cube is painted and cut into 216 smaller but identical pieces by making the minimum possible number of cuts. What is the minimum number of cuts required to cut a cube?

ایک کیوب کو رنگ دے کر ایک جیسے چھوٹے 216 ٹکڑوں میں کاٹا گیا ہے، کم سے کم ممکن کٹ لگا کر تو، کیوب کو کاٹنے کے لئے کم سے کم کتنے کٹ لگانے پڑیں گے؟

A.12
A.12
A.12

B.18
B.18
B.18

C.15
C.15
C.15

D.10
D.10
D.10

Answer: C.15
C.15
C.15

152 अति लैंगिक भूक (हायपर सेक्षुआलिटी) ही संज्ञा अति प्रमाणातील लैंगिक गतीविधीस सूचित करते आणि तिचा संबंध पुढीलपैकी कशाशी जोडण्यात आलेला आहे

The term hyper sexuality refers to high rates of sexual activity and has been linked with which of the following

لفظ ہائپر سیکسوالٹی کا مطلب ہوتا ہے جنسی سرگرمی کی اعلی شرح اور اسے مندرجہ ذیل سے مربوط کیا گیا ہے

A.असामान्य लैंगिक क्रियाशीलता (पॅराफीलिया)
A.paraphilia's
A.نفسیاتی جنسی عارضہ

B.चिंता
B.anxiety
B.تشویش

C.नैराश्य
C.depression
C.ڈپریشن

D.यातील सर्व
D.all of these
D.ان میں سے سبھی

Answer: D.यातील सर्व
D.all of these
D.ان میں سے سبھی

153 सूचना: दिलेल्या चारांपैकी वेगळी (असंबद्ध) असणारी आकृती शोधून काढा.

DIRECTIONS: Find the odd figure from the given four figures.

ہدایات: دی گئی 4 تصاویر میں سے متفرق تصویر تلاش کریں۔

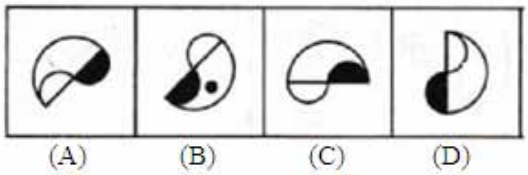

A. (A)

B. (B)

C. (C)

D. (D)

Answer: B. (B)

154 सूचना: खालील प्रश्नात उत्तरातील पर्यायांपैकी कोणत्या पर्यायी आकृतीत प्रश्नातील आकृती अंतर्भूत आहे?

DIRECTIONS: In the given question find the answer figure in which question figure is embedded.

ہدایات: دئے گئے سوال میں جواب کی اس تصویر کو تلاش کریں جس میں سوالات کی تصویرمنسلک ہے۔

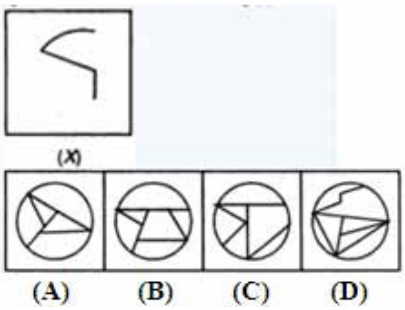

A. (A)

B. (B)

C. (C)

D. (D)

Answer: C. (C)

155 सूचनाः दिलेल्या पर्यायांमधून ऍनालॉगस शब्द निवडा.

“लॉर्ड ऑफ द रिंग्ज”चा संबंध जे. आर. आर. टोल्केन यांच्याशी आहे जसा “द लायन, द विच आणि द वार्डरोब” (क्रॉनिकल्स ऑफ नार्निया) याचा संबंध ...सोबत आहे.

DIRECTIONS: Choose the analogous word from the given alternatives.

“Lord of the Rings” is to J.R.R. Tolkien as “The Lion, the witch and the wardrobe” (Chronicles of Narina) is to _____.

ہدایات: دیے گئے متبادل سے مطابق لفظ کا انتخاب کریں

"لارڈ آف دا رنگز" کا ویسا ہی تعلق ہے جے.آر.آر.ٹولکن کے ساتھ جیسا کہ "دا لویں اینڈ دا واڈروب"(کرونکلز آف نارنیہ) کا ---------- کے ساتھ.

A.ए. ए. मिल्ने
A.A. A. Milne
A. اے.اے.ملن

B.सी. एस. लुईस
B.C. S. Lewis
B. سی.ایس.لیوس

C.जे. आर. आर. टोल्केन
C.J. R. R. Tolkien
C. جے.آر.آر.تولکین

D.आर. सटक्लिफ
D.R. Sutcliff
D. آر.سٹکلف

Answer: B.सी. एस. लुईस
B.C. S. Lewis
B. سی.ایس.لیوس

156 खालीलपैकी स्त्रीलिंगी शब्द ओळखा.

A.प्रसाद

B.प्रसार

C.प्रलाप

D.प्रशंसा

Answer: D.प्रशंसा

157 सूचना: अर्थपूर्ण परिच्छेद निर्माण करण्यासाठी, खाली दिलेली (P), (Q) (R), (S) आणि (T) ही पाच वाक्ये योग्य अनुक्रमाने पुनर्रचना करा; त्यांनतर खालील प्रश्नांची उत्तर द्या.

P. एका उंदराने आपली झोपमोड केल्याने सिंहाला खूप राग आला आणि तो त्या उंदराला आपल्या पंजाने मारणारच होता.
Q. उंदराने लगेच आपल्या टोकदार दातांनी जाळे कुरतडून टाकले आणि सिंहाची सुटका केली.
R. एक सिंह जंगलात गाढ झोपलेला असताना एक उंदीर त्याच्या अंगावर खेळत होता.
S. त्यानंतर लगेचच एका शिकाऱ्याच्या जाळ्यात सिंह अडकला आणि तेथून जाणाऱ्या उंदराने सिंहाला पहिले.
T. एक दिवस मी नक्की मदत कारेन, असे सांगत उंदराने माफी करण्याची विनंती सिंहाला केली. त्या विचाराने सिंहाला हसू आले आणि तो निघून गेला.

पुनर्रचना केल्यानंतर खालीलपैकी कोणते वाक्य पाचवे असेल?

DIRECTION: Rearrange the following five sentences (P), (Q), (R), (S) and (T) in the proper sequence to form a meaningful paragraph; then answer the questions given below them.
P. The lion was angry that the mouse disturbed its sleep and was about to kill it with its paw.
Q. The mouse immediately tore the net with its sharp teeth and rescued the lion.
R. A lion was fast asleep in the jungle when a mouse started running all over him.
S. Soon after that, the lion was trapped in a hunter’s net, and the little mouse was passing by and saw the lion.
T. When the mouse begged the lion to pardon it, saying it could be of help to it one day, the lion laughed at that thought and walked away.

Which of the following should be the FIFTH sentence after rearrangement?

ہدایات: ان پانچ جملوں (P)، (Q)، (R)، (S) اور (T) کو با معنی پیرا بنانے کے لئے دوبارہ ترتیب دیجئے، پھر نیچے دے گئے سوالوں کے جواب دیجئے

P. شیر گسصہ تھا کہ چونچے نے اسکی نیند خراب کی اور اپنے پنجے سے اسکو مارنے والا تھا.
Q. چونھے نے جلدی سے اپنے تیز دانتوں سے جال کو کاٹا اور شیر کو بچایا.
R. شیر جنگل میں گہری نیند سو رہا تھا جب ایک چونہا اسکے اپر چلنے لگا.
S. اسکے بعد، شیر شکاری کے جال میں پھنس گیا، اور چھوٹا چونہا وہاں سے گزر رہا تھا اورشیر کو دیکھا.
T. جب چونہا شیر سے معافی مانگ رہا تھا، یہ کہکر کہ وو ایک دن اسکی مدد کریگا، شیر نے اسپر ہنسا اور بھاگ گیا.

V دوبارہ ترییب دینے کے بعد کون سا جملہ پانچوہ ہونا چاہیے؟

A.Q
A.Q
A.Q

B.P
B.P
B.P

C.R
C.R
C.R

D.T
D.T
D.T

Answer: A.Q
A.Q
A.Q

158 एका रकमेवर 5 वर्षांनंतरचे सरळव्याज रू. 300 होईल. पुढच्या 5 वर्षांमध्ये मुद्दल 3 पट होईल, 10 वर्षाच्या शेवटी एकूण व्याज?

The simple interest on a sum of money will be Rs.300 after 5 years. In the next 5 years principal becomes 3 times, then the total interest at end of the 10th year?

ایک مبلغ رقم پر سود مفرد 5 سال بعد 300 روپیہ ہو جائیگا ۔ دوسرے 5 سال میں اصل تین گنا ہوجاتی ہے، تو دس سال کے بعد مجموعی سود کتنا ہوگا؟

A.रू. 1230
A.Rs.1230
A. 1230 روپیہ

B.रू. 1250
B.Rs.1250
B. 1250 روپیہ

C.रू. 1220
C.Rs.1220
C. 1220 روپیہ

D.रू. 1200
D.Rs.1200
D. 1200 روپیہ

Answer: D.रू. 1200
D.Rs.1200
D. 1200 روپیہ

159

दिलेल्या पर्यायांपैकी कोणती आकृती मुख्य आकृतीचे अचूक प्रतिबिंब आहे?

Which of the answer figure is exactly the mirror image of the given figure?

جواب کی کون سی تصویر، دی گئی تصویر کی بالکل صحیح آئینہ دار تصویر لکتی ہے؟

प्रश्न आकृती

Question Figure:

سوال کی تصویر

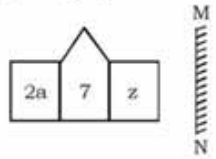

उत्तरासाठी पर्यायी आकृत्या

Answer figures:

جواب کی تصاویر

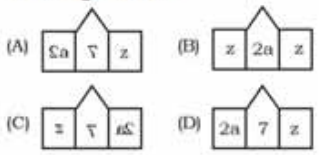

A. (A)

B. (B)

C. (C)

D. (D)

Answer: C. (C)

160

तरुण्यानंतर स्व-संकल्पना सामान्यपणे अशी होते

After puberty, the self concept usually becomes

بلوغت کے بعد خود نظری عام طور پر ہوجاتا ہے

A.मुलांमध्ये अधिक सकारात्मक
A.more positive in boys
A.لڑکوں میں زیادہ مثبت

B.मुलींमध्ये अधिक सकारात्मक
B.more positive in girls
B.لڑکیوں میں زیادہ مثبت

C.दोघांमध्येही अधिक सक्रिय
C.more positive in both
C.دونوں میں زیادہ مثبت

	D.कोणतेही नाही D.none D.ان میں سے کوئی نہیں
Answer:	C.दोघांमध्येही अधिक सक्रिय C.more positive in both C.دونوں میں زیادہ مثبت
161	Choose the word which is opposite in meaning to the given word. AUDACIOUS
	A.Cowardly
	B.Brave
	C.Courageous
	D.Fearless
Answer:	A.Cowardly

162 सूचना: हे प्रश्न खालील माहितीवर आधारित आहेत.
सहा लोक P, Q, R, S, T, आणि U सात मजली इमारतीमध्ये राहतात, पण ते याच क्रमात राहतात असे नाही.
तळमजल्याला पहिला मजला समजले जाते आणि त्या वरच्या मजल्यांना अनुक्रमे दुसरा, तिसरा .... असे समजले जाते.
इमारतीतला एक मजला रिकामा आहे. R आणि T यांच्यामध्ये दोन लोक राहतात, पण त्यांच्यापैकी कोणीही सर्वात वरच्या किंवा तळमजल्यावर राहत नाही. S Pच्या दोन मजले वर राहतो, P चा मजला रिकाम्या मजल्याच्या खालचा मजला नाही. U सम संख्या असलेल्या मजल्यावर राहतो पण Qच्या मजल्याच्या खाली राहत नाही. Uच्या खालच्या मजल्यावर राहणा-या व्यक्तींची संख्या Pच्या वर राहणा-या व्यक्तींच्या संख्येएवढी आहे. Qच्या वरचा मजला रिकामा आहे, पण तो Qच्या मजल्याला लागून नाही.
यापैकी कोण पाचव्या मजल्यावर राहतो?

DIRECTIONS: These questions are based on the following information.
Six persons P, Q, R, S, T, and U are living in a seven-storeyed building but not necessarily in the same order. Ground floor is considered the first floor and the floor above the ground floor is considered the second floor and so on. One floor is vacant in the given building. Two persons are living between R and T and neither of them lives either on the top floor or on the bottom floor. S lives two floors above P whose floor is not below the vacant floor. U lives on an even-numbered floor but not below Q's floor. The number of persons living below U's floor is equal to the number of persons living above P's floor. The vacant floor is above Q's floor but not adjacent to Q's floor.
Who among the following lives on the fifth floor?

ہدایات: یہ سوالات مندرجہ ذیل معلومات پر مبنی ہیں۔
ایک سات منزلہ عمارت میں رہتے ہیں لیکن لازمی طور پر یکساں ترتیب میں نہیں۔ گراؤنڈ فلور V اور P، Q، R، S، T، U سات افراد کو پہلا فلور مانا جاتا ہے اور گراؤنڈ فلور سے اوپر دوسرا فلور مانا جاتا ہے اور اسی طرح آگے۔ دی گئی عمارت میں ایک فلور خالی ہے۔ R اور T کے درمیان دو لوگ رہتے ہیں اور ان میں سے کوئی بھی سب سے اوپر کے فلور یا سب سے نچلے فلور پر نہیں رہتا ہے۔ T اور R کے فلور پر نہیں رہتا ہے۔ S، P ایک جفت عدد کے فلور پر رہتا ہے لیکن U سے دو فلور اوپر رہتا ہے جس کا فلور خالی فلور کے نیچے نہیں ہے۔ Q کے فلور سے اوپر رہنے والے لوگوں کی تعداد کے برابر ہے۔ P کے فلور سے نیچے رہنے والے لوگوں کی تعداد U کے نیچے نہیں ہے۔ Q کے فلور سے ملا ہوا نہیں ہے۔ Q کے فلور کے اوپر ہے لیکن Q خالی فلور
مندرجہ ذیل میں سے کون پانچویں فلور پر رہتا ہے؟

A.Q
A.Q
A.Q

B.S
B.S
B.S

C.P
C.P
C.P

D.U
D.U
D.U

Answer: C.P
C.P
C.P

163 सूचना: प्रत्येक प्रश्नात काही विधाने आहेत ज्यांच्यानंतर चार निष्कर्ष दिले आहे ज्यांना I, II, III आणि IV असे अंकित केले गेले आहे. सर्वसामान्य ज्ञात तथ्यांशी विसंगती वाटत असली तरीही या विधानांना सत्य समजा. सर्व निष्कर्ष वाचा आणि मग ठरावा को दिलेल्या निष्कर्षांपैकी कोणते दिलेल्या विधानांचे अनुसरण करतात.
विधाने :
A. सर्व आरसे फोन असतात.
B. काही फोन उपकरणे असतात
C. सर्व उपकरणे आरसे असतात.
निष्कर्ष:
I. काही उपकरणे फोन असतात.
II. काही उपकरणे आरसे असतात.
III. काही उपकरणे आरसे नसतात.
IV काही आरसे फोन असतात.

DIRECTION: In each of these questions a few statements are followed by four conclusions numbered I, II, III and IV Consider the given statements to be true even if they seem to be at variance with commonly known facts. Read all the conclusion(s) and then decide which of the given conclusion(s) logically follow(s) from the given statements.

Statements:
A. All mirrors are phones.
B. Some phones are gadgets.
C. All gadgets are mirrors.

Conclusions:
I. Some gadgets are phones.
II. Some gadgets are mirrors.
III. Some gadgets are not mirrors.
IV Some mirrors are phones.

ہدایت:ان سوالات میں سے ہر ایک میں کچھ بیانات کے بعد چار نتائج نمبر I، II، III اور IV دیے گئے ہیں۔ دیے گئے بیانات کو درست تسلیم کریں اگرچہ وہ عام طور پر معلوم حقائق کے برعکس نظر آتے ہوں۔ نتائج کو پڑھیں اور فیصلہ کریں کہ کون سے دیے گئے نتائج منطقی طور پر دیے گئے بیانات کی پیروی کرتے ہیں۔

بیانات:
A. سبھی آئینے فون ہیں۔
B. کچھ فون گیجٹ ہیں۔
C. سبھی گیجٹ آئینے ہیں۔

حل:
I. کچھ گیجٹ فون ہیں۔
II. کچھ گیجٹ آئینے ہیں۔
III. کچھ گیجٹ آئینے نہیں ہیں۔
IV کچھ آئینے فون ہیں۔

A.केवळ निष्कर्ष I, II आणि IV निघत असल्यास.
A.Only I, II and IV follow
A.صرف I، II اور IV پیروی کرتے ہیں

B.कोणतेही निष्कर्ष निघत नसल्यास
B.None follows
B.کوئی پیروی نہیں کرتا ہے

C.केवळ निष्कर्ष II आणि III निघत असल्यास.
C.Only II and III follow
C.صرف II اور III پیروی کرتے ہیں

D.एकतर निष्कर्ष II किंवा IV निघत असल्यास.
D.Either II or IV follows
D.یا تو II یا IV پیروی کرتا ہے

Answer: A.केवळ निष्कर्ष I, II आणि IV निघत असल्यास.
A.Only I, II and IV follow
A.صرف I، II اور IV پیروی کرتے ہیں

164 विधान:
कंपनी बीच्या सुपर कॉम्प्युटर हे जगातील सर्वात वेगवान आहेत. कंपनी ए ने दावा केला आहे की त्यांच्या सुपर कॉम्प्युटर कंपनी बीच्या सुपर कॉम्प्युटरला पराभूत करेल.

कृतीचा कोर्स:
I. कंपनी बी ने बदनामीसाठी कंपनी ए दंड करावे.
II. कंपनी बी ने बदनामी साठी कंपनी ए दंड करा.

Statement:
Company B's supercomputers are the fastest in the world. Company A has claimed that their supercomputer will defeat Company B's supercomputers.
Course of actions:
I. Company B should sue Company A for defamation.
II. Company B should protest against the claims of company A.

بیان:
کمپنی B کے سپر کمپیوٹرز دنیا بھر میں تیز ترین ہیں۔ کمپنی A نے دعویٰ کیا ہے کہ ان کے سپر کمپیوٹرز کمپنی B کے سپر کمپیوٹرز کو شکست دے دیں گے۔

لائحہ عمل:
I۔ کمپنی B کو بدنامی پر کمپنی A پر مقدمہ کر دینا چاہیے۔
II۔ کمپنی B کو کمپنی A کے دعوے کے خلاف احتجاج کرنا چاہیے۔

A.फक्त I अनुसरून आहे
A.Only I follows
A. صرف I لاگو ہو گا۔

B.फक्त II अनुसरण करते आहे
B.Only II follows
B. صرف II لاگو ہو گا۔

C.एकतर I किंवा II अनुसरून आहे
C.Either I or II follows
C. I یا II میں سے ایک لاگو ہو گا۔

D.I किंवा II दोन्हीपैकी काहीही अनुसरण करत नाही
D.Neither I nor II follows
D. I اور II میں سے کوئی بھی لاگو نہیں ہو گا۔

Answer: D.I किंवा II दोन्हीपैकी काहीही अनुसरण करत नाही
D.Neither I nor II follows
D. I اور II میں سے کوئی بھی لاگو نہیں ہو گا۔

165 खालीलपैकी अशुद्ध वाक्य कोणते ?

A.सरिता टेनिस खेळाडू आहे.

B.प्रदीप टेनिस खेळाडू आहे.

C.अविनाश व प्रदीप टेनिस खेळाडू आहे.

D.अविनाश टेनिस खेळाडू आहे.

Answer: C.अविनाश व प्रदीप टेनिस खेळाडू आहे.

166 सूचना: प्रत्येक प्रश्नाला एक प्रमुख विधानासोबत चार विधाने आहेत ज्यांच्याखाली A, B, C आणि D असे चार विधान आहेत. क्रमवार विधानांची जोडी निवडा ज्यामध्ये प्रथम विधान दुसऱ्या विधानाला सुचवते, आणि दोन्ही विधाने तर्किकदृष्ट्या प्रमुख विधानासोबत निगडित असेल.

सरकार एकतर अनुदान देते किंवा थेट रोख देते.
A. सरकारने अनुदान दिले.
B. सरकारने अनुदान दिले नाही.
C. सरकारने थेट रोख रक्कम दिली.
D. सरकारने थेट रोख रक्कम दिली नाही

DIRECTIONS: Each question has a main statement followed by four statements labelled A, B, C and D. Choose the ordered pair of statements, where the first statement implies the second, and the two statements are logically consistent with the main statement.

The government gives either subsidies or direct cash
A.The government gave subsidies
B.The government did not give subsidies
C.The government gave direct cash
D.The government did not give direct cash

ہدایت: ہر سوال میں ایک جملہ ہے جسکے بعد چار جملےاے، بی،سی اور ڈی کے نام سے دئے گئے ہیں اسمیں منسلک جوڑیوں کو چنئے۔ جہاں پہلا جملہ دوسرے جملہ کی اور اشارہ کر رہا ہے اور دو جملے منطقی مرکزی بیان کے مطابق ہیں

گورنمنٹ یا سبسڈی دیتی ہے یا ڈائریکٹ کیش
Aگورنمنٹ نے سبسڈی دی۔
Bگورنمنٹ نے سبسڈی نہیں دی۔
Cگورنمنٹ نے ڈائریکٹ کیش دیا۔
Dگورنمنٹ نے ڈائریکٹ کیش نہیں دیا۔

A.BD
A.BD
A.BD

B.DA
B.DA
B.DA

C.CB
C.CB
C.CB

D.AC
D.AC
D.AC

Answer: B.DA
B.DA
B.DA

167 मनीष वरून 16 व्या स्थानावर आणि खालून 29 व्या स्थानावर आहे. तर वर्गात एकूण मुले किती ?

Manish ranked 16th from the top and 29th from the bottom. How many boys were there in the class?

منیش نے اپر سے 16 وہ وار نیچے سے 29 وہ درجہ حاصل کیا. کلاس میں کل کتنے بچھے ہے؟

A.40
A.40
A.40

B.45
B.45
B.45

C.50
C.50
C.50

D.44
D.44
D.44

Answer: D.44
D.44
D.44

168 कंटेनरमधील सोल्युशन "A" आणि सोल्युशन "B" चे प्रमाण 3:2 आहे, 10 लिटर्स मिश्रण बाहेर काढले जाते आणि त्याच्या जागी "B" सोल्युशन टाकले जाते, तेव्हा गुणोत्तर 2:3 होते. कंटेनरमधील मिश्रणाचे एकूण प्रमाण:

The ratio of Solution “A” and Solution “B” in the container is 3:2 when 10 liters of the mixture is taken out and is replaced by the Solution “B”, the ratio become 2:3. The total quantity of the mixture in the container is:

کنٹینر میں محلول "A"اور محلول "B" کا تناسب 3:2ہے۔ جب 10 لیٹر کا مرکب باہر نکالا جاتا ہے اورمحلول "B" کے ساتھ تبدیل کیا جاتا ہے، تو تناسب 2:3 بن جاتا ہے۔ کنٹینر میں مرکب کی کل مقدار یہ ہے:

A.25 लिटर्स
A.25 litres
A.25 لیٹر

B.40 लिटर्स
B.40 litres
B.40 لیٹر

C.30 लिटर्स
C.30 litres
C.30 لیٹر

D.44 लिटर्स
D.44 litres
D.44 لیٹر

Answer: C.30 लिटर्स
C.30 litres
C.30 لیٹر

169 किशोरावस्थाला मानवी जीवनातील सर्वात महत्वाचा काळ म्हंटले जाते-

Infancy is termed as the most important period of human life because—

شیر خوارگی کو انسانی زندگی کا سب سے اہم دورانیہ قرار دیا جاتا ہے کیونکہ-

A.मानवी जीवनातील सुरुवातीचा टप्पा
A.It is formative stage of human life
A.یہ انسانی زندگی کا تخلیقی مرحلہ ہے

B.फक्त हाच मानवी जीवनातील आनंद देणारा काळ
B.It is the only enjoyable period in human
B.یہ انسان میں واحد لطف اندوز دورانیہ ہے

C.जेव्हा मुल चालायला शिकतो
C.It is when the child learns to walk
C.یہ تب ہے جب بچے چلنا سیکھتا ہے

D.या पैकी नाही
D.None of these
D.ان میں سے کوئی نہیں

Answer: A.मानवी जीवनातील सुरुवातीचा टप्पा
A.It is formative stage of human life
A.یہ انسانی زندگی کا تخلیقی مرحلہ ہے

170 बटाटा आहे:

Potato is a:

آلو ایک

	A.फुल A.Flower A. پھول
	B.फळ B.Fruit B. پھل
	C.भाजी C.Vegetable C. سبزی
	D.पान D.Foliage D. پودا
Answer:	C.भाजी C.Vegetable C. سبزی

171 खालील शब्दांची चढत्या क्रमाने मांडणी करून खाली दिलेल्या प्रतिसादांमधून कोणता अर्थपूर्ण क्रम असेल?

1. अत्यानंद
2. आनंद
3. समीपता
4. परमानंद
5. आनंद

Which one of the given responses would be a meaningful order of the following words in ascending order?

1. Euphoria
2. Happiness
3. Ambivalence
4. Ecstasy
5. Pleasure

چڑھتی ہوئی ترتیب میں دیےگیے جوابات میں سے کونسا ایک مندرجہ ذیل الفاظ کی معنی خیز ترتیب ہوگی؟
1. زیادہ خوشی
2. خوشی
3. محیط
4. تحمل
5. خوشی

A.1, 4, 2, 5, 3
A.1, 4, 2, 5, 3
A.1, 4, 2, 5, 3

B.2, 1, 3, 4, 5
B.2, 1, 3, 4, 5
B.2, 1, 3, 4, 5

C.3, 2, 5, 1, 4
C.3, 2, 5, 1, 4
C.3, 2, 5, 1, 4

D.4, 1, 3, 2, 5
D.4, 1, 3, 2, 5
D.4, 1, 3, 2, 5

Answer: C.3, 2, 5, 1, 4
C.3, 2, 5, 1, 4
C.3, 2, 5, 1, 4

172 Out of the given options, choose the most appropriate one to fill in the blank.
The robber _____ out a knife.

A.took

B.take

C.have take

D.have took

Answer: A.took

173 _____ घरात रहातो.

_____ lives in a house.

_____ گھر میں رہتا ہے.

A.सिंह
A.Lion
A.شیر

B.कुत्रा
B.Dog
B.کتا

C.मनुष्य
C.Man
C.انسان

D.मासा
D.Fish
D.مچھلی

Answer: C.मनुष्य
C.Man
C.انسان

174 च्याकारणांने विद्यार्थ्यांमध्ये निराशा निर्माण होते-

The origin of frustration in students occur due to —

طلباء میں مایوسی کی اصل وجہ ہوتی ہے -

A.उदिष्टांमधील संघर्ष
A.Conflicts among motives
A.مقاصد کے مابین تنازعہ

B.प्रोत्साहनांचा अभाव
B.Lack of incentives
B.انعام کی کمی

C.वैयक्तिक अपंगत्व
C.Personal disability
C.ذاتی معذوری

D.वरील पैकी एकही नाही
D.None of the above
D.اوپر میں سے کوئی نہیں

Answer: A.उदिष्टांमधील संघर्ष
A.Conflicts among motives
A.مقاصد کے مابین تنازعہ

175

सूचना: खालील प्रश्नात एक उघडलेला फासा दाखविला आहे आणि उत्तराचे पर्याय म्हणून चार पूर्ण फासे दाखविले आहेत. उघडलेला फासा परत बंद केल्यानंतर कुठचा फासा तयार होईल तो योग्य पर्याय निवडा.

DIRECTIONS: An unfolded dice is given, from the answer figures which figure is similar when unfolded to the question figure.

ہدایات: ایک کھلا ہوا ڈبہ دیا گیا ہے، بتائیے کہ جب سوال کی تصویر کو کھولا جاتا ہے تو جواب کی تصاویر میں سے کون سی تصویر اسی طرح کی ہے-



A. (A)

B. (B)

C. (C)

D. (D)

Answer: C. (C)

176

मोठ्या शहरांमध्ये जागेचा अभाव मुख्यत: यामुळे आहे:

The scarcity of space in big cities is mainly due to:

بڑے شہروں میں جگہ کی کمی کی بنیادی وجہ ہے

A.भरपूर लोकसंख्या
A.Huge population
A.کثیر آبادی

B.अतिक्रमण
B.Encroachment
B.قبزہ ناجائز

C.विकास
C.Developments
C.تحولات

D.बेकायदेशीर कार्य
D.Illegal activities
D.غیر قانونی سرگرمیاں

Answer: A.भरपूर लोकसंख्या
A.Huge population
A.کثیر آبادی

177 3360 ÷ 15 ÷ 14 = ?

3360 ÷ 15 ÷ 14 = ?

3360 ÷ 15 ÷ 14 = ?

A.22
A.22
A.22

B.24
B.24
B.24

C.16
C.16
C.16

D.18
D.18
D.18

Answer: C.16
C.16
C.16

178 मुलांच्या रांगेत विग्याण सुरवातीपासून 12 व्या आणि शेवटून 19 व्या स्थानावर आहे. तर मुलांच्या दुसऱ्या रांगेत अतिन सुरवातीपासून 14 व्या आणि शेवटून 20 व्या स्थानावर आहे. तर दोन्ही रांगेत मिळून एकूण मुले किती ?

In a row of boys, Vigyan is 12th from the start and 19th from the end. In another row of boys, Atin is 14th from the start and 20th from the end. How many boys are there in both the rows together?

لڑکوں کی کتار میں، ویگیاں شرو سے باروہ ہے اور آخر سے 19 وہ ہے.لڑکوں کی دوسری کتار میں، آتیں شرو سے 14 وہ ہے اور آخر سے 20 وہ ہے. دونوں کتار میں کتنے بچھے ہے؟

A.72
A.72
A.72

B.65
B.65
B.65

C.63
C.63
C.63

D.61
D.61
D.61

Answer: C.63
C.63
C.63

179 भारतात तिच्या सदस्यांच्या दृष्टीने कोणत्या राज्याची विधानसभा सर्वात लहान आहे?

Which state in India has the smallest Vidhan Sabha in terms of its members?

اراکین کی بنیاد پر بھارت کی سب سے چھوٹی اسمبلی ہے ؟

A.गोवा
A.Goa
A. گوا

B.सिक्कीम
B.Sikkim
B. سککم

C.मिझोराम
C.Mizoram
C. میزورم

D.त्रिपुरा
D.Tripura
D. تریپورہ

Answer: B.सिक्कीम
B.Sikkim
B. سککم

180 शाळा संग्रहालयात आपण गोळा करू शकतो-

In a school museum we can collect—

اسکول کے میوزیم میں ہم جمع کر سکتے ہیں-

A.सर्व प्रकारची दृश्यमान सामग्री
A.All types of visual material
A.بصری مواد کی تمام اقسام

B.सर्व प्रकारची ध्वनी-दृश्यमान सामग्री
B.All types of audio-visual material
B.آڈیو بصری مواد کی تمام اقسام

C.सर्व विषयांची' दृश्यमान सामग्री जी योग्यरीतीने आयोजित व प्रदर्शित केलेली आहे
C.All subjects' visual material which have been organised and displayed properly
C.تمام مقصودی بصری مواد ،جس کو مناسب طریقے سے منظم اور ظاہر کیا جاسکتا ہے

D.वरीलपैकी काहीच नाही
D.None of the above
D.اوپر میں سے کوئی نہیں

Answer: C.सर्व विषयांची' दृश्यमान सामग्री जी योग्यरीतीने आयोजित व प्रदर्शित केलेली आहे
C.All subjects' visual material which have been organised and displayed properly
C.تمام مقصودی بصری مواد ،جس کو مناسب طریقے سے منظم اور ظاہر کیا جاسکتا ہے

181 सामान्यतः एक व्यक्ती मानसिक थकव्याच्या माध्यमातून अनुभावतो

Generally in a state of mental fatigue a person can experience —

عام طور پر ذہنی تھکن کی حالت میں ایک شخص تجربہ کرسکتا ہے-

A.मानसिक अशक्तपणा
A.Mental weakness
A.دماغی کمزوری

B.लक्षात न रहाणे
B.Attention passivism
B.توجہ کی ناکامی

C.चिंता
C.Anxiety
C.پریشانی

D.वरील सर्व
D.All the above
D.مذکورہ تمام

Answer: D.वरील सर्व
D.All the above
D.مذکورہ تمام

182 दिलेल्या पर्यायांमधून वेगळे ते निवडा.

Choose the odd one out from the given alternatives.

دیے گئے متبادل میں سے بے جوڑ کو چنیں۔

A.व्होल्ट
A.Volt
A.وولٹ

B.शक्ती
B.Power
B.توانائی

C.घनफळ
C.Volume
C.حجم

D.जोर
D.Force
D.قوت

Answer: A.व्होल्ट
A.Volt
A.وولٹ

183

सूचना: खालील प्रश्नातील चार पर्यायांपैकी, तीन पर्याय असे आहेत की प्रत्येकातील 3 शब्द एकमेकांशी (A), (B), (C), (D) आणि (E) अशा दिलेल्या 5 पर्यायांपैकी कोणत्याही एका दृष्टीने एकमेकांशी संबंधित आहेत. आणि संबंध दर्शविणारा 1 पर्याय आहे जो खालील आकृतींद्वारा दाखविलेला नाही. ह्या अटींची पूर्तता करणारा संबंध म्हणजे तुमचे उत्तर असेल.

DIRECTION: Out of the four alternatives in each of the following questions, three alternatives are such that the three words in each are related among themselves in one of the five ways represented by (A), (B), (C), (D) and (E) below. And one of the alternatives represents a relationship which is not represented by any of the figures given below. The relationship that complies this condition is your answer.

ہدایت: مندرجہ ذیل سوال میں چار متبادل میں سے، تین متبادل ایسے ہیں کہ ہر ایک میں تین الفاظ آپس میں پانچ طریقوں میں سے ایک میں کے ذریعہ کی گئی ہے۔ اور ایک متبادل ایسے تعلق کی نمائندگی کرتا (A)،(B)،(C)،(D)&(E)متعلق ہیں جن کی نمائندی مندرجہ ذیل ہے جس کی نمائندگی یجے دیے گئے کسی بھی خاکے کے ذریعہ نہیں کی جاتی ہے۔ اس شرط پر پورا اترنے والی شرط آپ کا جواب ہے

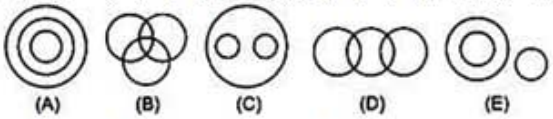

(a) Animal, Mammal, Cow/ प्राणी, सस्तन प्राणी, गाय/جانور، میمل، گائے

(b) Colour, Cloth, Merchant/ रंग, कापड, व्यापारी/رنگ، کپڑا، مرچنٹ

(c) Colour, Red, Blue/ रंग, लाल, निळा/رنگ، سرخ، نیلا

(d) Male, Horse, Mare / नर, घोडा, घोडी/مذکر، گھوڑا، گھوڑی

A. (A)

B. (B)

C. (C)

D. (D)

Answer: B. (B)

184

दिलेल्या पर्यायांमधून वेगळे ते निवडा.

Choose the odd one out from the given alternatives.

دیے گئے متبادل میں سے بے جوڑ کو چنیں۔

A.क्रिकेट
A.Cricket
A.کرکٹ

B.वॉलीबॉल
B.Volleyball
B.والی بال

C.बुद्धीबळ
C.Chess
C.شطرنج

D.टेबल टेनीस
D.Tabletennis
D.ٹیبل ٹینس

Answer: C.बुद्धीबळ
C.Chess
C.شطرنج

185 रिक्त इलेक्ट्रॉन कक्षामध्ये अधातूत किती इलेक्ट्रॉन्स असतात?

How many electrons does non-metals have in their valence shell?

غیر دھات کے ویلینس شیل میں کتنے الیکٹرون ہوتے ہیں؟

A.1, 2 किंवा 3
A.1, 2 or 3
A.1، 2 یا 3

B.5, 6, किंवा 7
B.5, 6, or 7
B. 5، 6 یا 7

C.10, 20 किंवा 30
C.10, 20 or 30
C.10، 20 یا 30

D.8, 9 किंवा 10
D.8, 9 or 10
D.8، 9 یا 10

Answer: B.5, 6, किंवा 7
B.5, 6, or 7
B. 5، 6 یا 7

186 ‘ टोलेजंग ‘ या शब्दाचा विरुद्धार्थी शब्द कोणता ?

A.भव्य

B.विशाल

C.क्षुद्र

D.टोला मारणे

Answer: C.क्षुद्र

187 सूचना: हे प्रश्न खालील माहितीवर आधारित आहेत.
सहा लोक P, Q, R, S, T, आणि U सात मजली इमारतीमध्ये राहतात, पण ते याच क्रमात राहतात असे नाही.
तळमजल्याला पहिला मजला समजले जाते आणि त्या वरच्या मजल्यांना अनुक्रमे दुसरा, तिसरा .... असे समजले जाते.
इमारतीतला एक मजला रिकामा आहे. R आणि T यांच्यामध्ये दोन लोक राहतात, पण त्यांच्यापैकी कोणीही सर्वात वरच्या किंवा तळमजल्यावर राहत नाही. S Pच्या दोन मजले वर राहतो, P चा मजला रिकाम्या मजल्याच्या खालचा मजला नाही. U सम संख्या असलेल्या मजल्यावर राहतो पण Qच्या मजल्याच्या खाली राहत नाही. Uच्या खालच्या मजल्यावर राहणा-या व्यक्तींची संख्या Pच्या वर राहणा-या व्यक्तींच्या संख्येएवढी आहे. Qच्या वरचा मजला रिकामा आहे, पण तो Qच्या मजल्याला लागून नाही.
Tच्या मजल्याच्या लगेच वर कोण राहतो?

DIRECTIONS: These questions are based on the following information.
Six persons P, Q, R, S, T, and U are living in a seven-storeyed building but not necessarily in the same order. Ground floor is considered the first floor and the floor above the ground floor is considered the second floor and so on. One floor is vacant in the given building. Two persons are living between R and T and neither of them lives either on the top floor or on the bottom floor. S lives two floors above P whose floor is not below the vacant floor. U lives on an even-numbered floor but not below Q's floor. The number of persons living below U's floor is equal to the number of persons living above P's floor. The vacant floor is above Q's floor but not adjacent to Q's floor.
Who lives immediately above T's floor?

ہدایات: یہ سوالات مندرجہ ذیل معلومات پر مبنی ہیں۔
ایک سات منزلہ عمارت میں رہتے ہیں لیکن لازمی طور پر یکساں ترتیب میں نہیں۔ گراؤنڈ فلور V اور P، Q، R، S، T، U سات افراد کو پہلا فلور مانا جاتا ہے اور گراؤنڈ فلور سے اوپر دوسرا فلور مانا جاتا ہے اور اسی طرح آگے۔ دی گئی عمارت میں ایک فلور خالی ہے۔ R اور T کے درمیان دو لوگ رہتے ہیں اور ان میں سے کوئی بھی سب سے اوپر کے فلور یا سب سے نچلے فلور پر نہیں رہتا ہے۔ S، P کے فلور Q ایک جفت عدد کے فلور پر رہتا ہے لیکن U سے دو فلور اوپر رہتا ہے جس کا فلور خالی فلور کے نیچے نہیں ہے۔ P کے فلور سے نیچے رہنے والے لوگوں کی تعداد U کے فلور سے اوپر رہنے والے لوگوں کی تعداد کے برابر ہے۔ Q کے فلور کے اوپر ہے لیکن Q خالی فلور کے فلور سے ملا ہوا نہیں ہے۔
T کے فلور کے فوری اوپر کون رہتا ہے؟

A.P
A.P
A.P

B.U
B.U
B.U

C.Q
C.Q
C.Q

D.निर्धारित केले जाऊ शकत नाही.
D.Cannot be determined
D.تعین نہیں کیا جا سکتا ہے

Answer:	D.निर्धारित केले जाऊ शकत नाही. D.Cannot be determined D.تعین نہیں کیا جا سکتا ہے

188	‘ आता मला साठावे वर्ष लागले.’ या वाक्यातील विशेषण ओळखा.
	A.आता
	B.मला
	C.साठावे
	D.वर्ष
Answer:	C.साठावे

189 सूचना: खाली दिलेल्या प्रश्नात एक विधान आहे ज्याचे I आणि II असे दोन निष्कर्ष त्याखाली अंकित केलेले आहेत. या आधारे सर्वात योग्य पर्याय निवडा.

विधान:
तारण गुंतवणूकीत बाजारातील उतार-चढावातील जोखीम असते. तेव्हा देऊ केलेले दस्तऐवज गुंतवणूक करण्यापूर्वी काळजीपूर्वक वाचा.

निष्कर्ष:
I. आपण तारण गुंतवणूक नाही केली पाहिजे.
II. जोखीम समजल्याशिवाय आपण तारण गुंतवणूक नाही केली पाहिजे.

DIRECTIONS: The question below has a statement followed by two conclusions numbered I and II. Based on this choose the option that is most suitable.

Statement:
Securities investments carry market risk. Read the offer document carefully before investing.

Conclusions:
I. We should not invest in securities.
II. We should not invest in securities without understanding the risk.

ہدایات: نیچے دیے گئے سوال میں ایک بیان کے بعد دو نتائج I اور II دیے گئے ہیں۔ اس کی بنیاد پرانتہائی موزوں آپشن کا انتخاب کیجیے۔

بیان:
سیکورٹیز سرمایہ کاری میں مارکیٹ کا خطرہ موجود ہوتا ہے. سرمایہ کاری کرنے سے قبل پیشکش دستاویز کو احتیاط سے پڑھیں.

نتیجے:
I. ہمیں سیکورٹی میں سرمایہ کاری نہیں کرنا چاہئے.
II. ہمیں خطرے کو سمجھے بغیر سیکورٹیز میں سرمایہ کاری نہیں کرنا چاہئے.

A.केवळ निष्कर्ष क्रमांक I विधानास अनुसरून आहे
A.Only Conclusion I follows
A.صرف نتیجہ I لاگو ہو گا۔

B.केवळ निष्कर्ष क्रमांक II विधानास अनुसरून आहे
B.Only Conclusions II follows
B.صرف نتیجہ II لاگو ہو گا۔

C.निष्कर्ष क्रमांक I किंवा II अनुसरून आहे.
C.Either I or II follows
C. I یا II میں سے ایک لاگو ہو گا۔

D.कोणताही निष्कर्ष अनुसरून नाही
D.Neither I nor II follow.
D. I اور II میں سے کوئی بھی لاگو نہیں ہو گا۔

Answer: B.केवळ निष्कर्ष क्रमांक II विधानास अनुसरून आहे
B.Only Conclusions II follows
B.صرف نتیجہ II لاگو ہو گا۔

190 सुर्यग्रहण तेव्हा घडत जेव्हा

Solar eclipse occurs when the

سورج گرہن اس وقت ہوتا ہے جب

A.सुर्य पृथ्वी आणि चंद्रच्या मध्ये येतो
A.Sun comes between the earth and the moon
A.سورج زمین اور چاند کے بیچ میں آجاتا ہے

B.चंद्र पृथ्वी आणि सुयाच्या मध्ये येतो
B.Moon comes between the earth and sun
B.چاند زمین اور سورج کے بیچ میں آجاتا ہے

C.पृथ्वी चंद्र आणि सुर्याच्या मध्ये येते
C.Earth comes between the moon and sun
C.زمین چاند اور سورج کے بیچ میں آجاتی ہے

D.जेव्हा पृथ्वीची सावली चंद्रावर पडते
D.When earth shadow's fall on the moon
D.زمین کا سایہ چاند پر آتا ہے

Answer: B.चंद्र पृथ्वी आणि सुयाच्या मध्ये येतो
B.Moon comes between the earth and sun
B.چاند زمین اور سورج کے بیچ میں آجاتا ہے

191 **सूचना**: खालील प्रश्नात उत्तरातील पर्यायांपैकी कोणत्या पर्यायी आकृतीत प्रश्नातील आकृती अंतर्भूत आहे?

DIRECTIONS: In the given question find the answer figure in which question figure is embedded.

ہدایات: دئے گئے سوال میں جواب کی اس تصویر کو تلاش کریں جس میں سوالات کی تصویرمنسلک ہے-

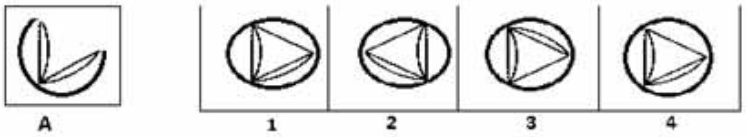

A. (A)

B. (B)

C. (C)

D. (D)

Answer: D. (D)

192 दिलेली अदलाबदल : चिन्हे – आणि x, तसेच आकडे 12 आणि 6 ; तर 12 + 4 ÷ 2 x 1– 6 चे मूल्य किती ?

Given interchanges: signs - and ×, and numbers 12 and 6; then the value of 12 + 4 ÷ 2 × 1 - 6 is

دیئے گئے تبادلے: علامات - اور ×، اور نمبر 12 اور 6؛ تو 12 + 4÷ 2 ×1 - 6کی تعداد ہے

A.12
A.12
A.12

B.-8
B.-8
B.-8

C.4
C.4
C.4

D.-4
D.-4
D.-4

Answer: D.-4
D.-4
D.-4

193 सूचना: प्रत्येक प्रश्नाला एक प्रमुख विधानासोबत चार विधाने आहेत ज्यांच्याखाली A, B, C आणि D असे चार विधान आहेत. क्रमवार विधानांची जोडी निवडा ज्यामध्ये प्रथम विधान दुसऱ्या विधानाला सुचवते, आणि दोन्ही विधाने तर्किकदृष्ट्या प्रमुख विधानासोबत निगडित असेल.

जर तुम्ही रात्री उशीरापर्यंत जागत राहिलात, तर तुम्हाला सकाळी ताजेतवाने वाटणार नाही
A. तुम्ही रात्री उशीरापर्यंत जागत राहिलात
B. तुम्ही रात्री उशीरापर्यंत जागत राहिला नाहीत
C. तुम्हाला सकाळी ताजेतवाने वाटले नाही
D. तुम्हाला सकाळी ताजेतवाने वाटले

DIRECTIONS: Each question has a main statement followed by four statements labelled A, B, C and D. Choose the ordered pair of statements, where the first statement implies the second, and the two statements are logically consistent with the main statement.

If you stay up late night , you won't feel fresh in the morning
A. you stayed up late night
B. you did not stay up late night
C. you did not feel fresh in the morning
D. you felt fresh in the morning

ہدایت: ہر سوال میں ایک جملہ ہے جسکے بعد چار جملےاے، بی،سی اور ڈی کے نام سے دئے گئے ہیں اسمیں منسلک جوڑیوں کو چنئے۔ جہاں پہلا جملہ دوسرے جملہ کی اور اشارہ کر رہا ہے اور دو جملے منطقی مرکزی بیان کے مطابق ہیں

اگر آپ رات دیر تک جاگیں تو صبح فریش نہیں ہوں گے
Aآپ رات دیر تک جاگے ۔
Bآپ رات دیر تک نہیں جاگے ۔
Cآپ صبح فریش نہیں تھے ۔
Dآپ صبح فریش تھے ۔

A.AB
A.AB
A.AB

B.BC
B.BC
B.BC

C.DA
C.DA
C.DA

D.DB
D.DB
D.DB

For More Info And Videos About TAIT-Exam Syllabus And Other Exam Visit My Channel
TAIT च्या 30 प्रश्नपत्रिका PDF
BADSHAHimp Available Request 9765226781
WWW.YouTube.com/BADSHAHimp
Subscribe My Channel

Answer: D.DB
D.DB
D.DB

194 मूल्य शिक्षणाचा अर्थ

Value education stands for

قابل قدر تعلیم کا مطلب کیا ہوتا ہے

A.विद्यार्थ्यास आरोग्यसंपन्न करणे
A.Making a student healthy
A.طالب علم کو صحتمند بنانا

B.विद्यार्थ्यास काम मिळवावयास लावणे
B.Making a student get the job
B.طالب علم کو ملازمت دلانا

C.सद्गुण रुजवणे
C.Inculcation of virtues
C.فضیلت کا اجتناب

D.व्यक्तिमत्त्वाचा चौफेर विकास
D.all round development of personality
D.شخصیت کی اجتماعی ترقی

Answer: D.व्यक्तिमत्त्वाचा चौफेर विकास
D.all round development of personality
D.شخصیت کی اجتماعی ترقی

195 **सूचना**: खालील प्रश्नात एक उघडलेला फासा दाखविला आहे. उत्तराच्या पर्यायांपैकी कोणता पर्याय B या चिन्हाच्या विरुद्ध बाजूला येईल?

DIRECTIONS: In the following question an unfolded dice is given. From the given alternatives which of the following will be opposite of B?

ہدایات: مندرجہ ذیل سوال میں ایک کھلا ہوا ڈبہ دیا گیا ہے- دئے گئے متبادلات میں مندرجہ ذیل میں سے کون سا B کے برعکس ہو گی؟

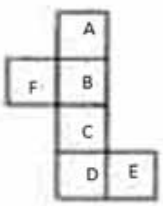

A. A

B. B

C. C

D. D

Answer: C. C

196

सूचना: खालील प्रश्नात, दिलेल्या पर्यायांमधून नातेसंबंध सांगणारी आकृती निवडा.

DIRECTIONS: In the question below, select the related figure from the given alternatives.

ہدایات: دئے گئے سوال میں جواب کی اس تصویر کو تلاش کریں جس میں سوالات کی تصویرمنسلک ہے۔

Problem Figures:

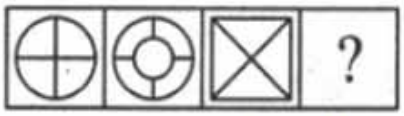

(A) (B) (C) (D)

Answer Figures:

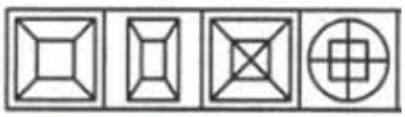

(1) (2) (3) (4)

A. 1

B. 2

C. 3

D. 4

Answer: A. 1

197

$$\frac{11 \times 11 \times 11 + 5 \times 5 \times 5}{(11)^2 + (5)^2 - 11 \times 5} = ?$$

A. 12

B. 13

C. 15

D. 16

Answer: D. 16

For More Info And Videos About TAIT-Exam Syllabus And Other Exam Visit My Channel
TAIT च्या 30 प्रश्नपत्रिका PDF
BADSHAHimp Available Request 9765226781
YouTube WWW.YouTube.com/BADSHAHimp
Subscribe My Channel

198 निर्देश: खालीलपैकी प्रत्येक प्रश्नात, मालिकेमधील एक संख्या चुकीची आहे. चुकीची संख्या शोधा.

4, 10, 23, 50, 104, 216, 439

DIRECTION: In each of the following questions, one number is wrong in the series. Find out the wrong number.

4, 10, 23, 50, 104, 216, 439

ہدایت ہر سوال میں یک نمبر غلط ہے . اس غلط نمبر کو کھوجے .

4, 10, 23, 50, 104, 216, 439

A.4
A.4
A.4

B.10
B.10
B.10

C.23
C.23
C.23

D.104
D.104
D.104

Answer: D.104
D.104
D.104

199 खालील समीकरणाचे मूल्य काढा:

4689 – 8621 + 924 – 9999 + 5432 =?

Find the value of following expression:

4689 – 8621 + 924 – 9999 + 5432 =?

درج ذیل مساوات کی قیمت معلوم کریں:

4689 – 8621 + 924 – 9999 + 5432 =?

For More Info And Videos About TAIT-Exam Syllabus And Other Exam Visit My Channel
TAIT च्या 30 प्रश्नपत्रिका PDF
BADSHAHimp Available Request 9765226781
WWW.YouTube.com/BADSHAHimp
Subscribe My Channel

	A.4328 A.4328 A.4328
	B.–8685 B.–8685 B.–8685
	C.–7575 C.–7575 C.–7575
	D.5423 D.5423 D.5423
Answer:	C.–7575 C.–7575 C.–7575

200	$\sqrt{0.36}$ चे अंदाजे मूल्य असेल: The approximate value of $\sqrt{0.36}$ will be: $\sqrt{0.36}$ کی تخمینی قدر ہو گی:
	A. 0.3
	B. 0.03
	C. 0.9
	D. 0.6
Answer:	D. 0.6

For More Info And Videos About TAIT-Exam Syllabus And Other Exam Visit My Channel
TAIT च्या 30 प्रश्नपत्रिका PDF
BADSHAHimp Available Request 9765226781
WWW.YouTube.com/BADSHAHimp
Subscribe My Channel

Question Paper Title : TAIT_PAPER_19

Date of Exam : 2017-12-20 12:30:00.0

1	बेलग्रेड ही _____ ची राजधानी आहे Belgrade is the Capital of - بالگریڈ راجدھانی ہے :
	A.सेशल्स A.Seychelles A.سی شیلس
	B.रवांडा B.Rwanda B.روانڈا
	C.सर्बिया C.Serbia C. سربیا
	D.पेरू D.Peru D.پیرو
Answer:	C.सर्बिया C.Serbia C. سربیا
2	11 × 13 × 17 = ? 11 × 13 × 17 = ? 11 × 13 × 17 = ?
	A.2431 A.2431 A.2431
	B.2441 B.2441 B.2441

For More Info And Videos About TAIT-Exam Syllabus And Other Exam Visit My Channel
TAIT च्या 30 प्रश्नपत्रिका PDF
BADSHAHimp Available Request 9765226781
WWW.YouTube.com/BADSHAHimp
Subscribe My Channel

C.2531
C.2531
C.2531

D.2521
D.2521
D.2521

Answer: A.2431
A.2431
A.2431

3 **सूचना**: खालील प्रश्नात एकाच फाशाच्या चार अवस्था दाखविल्या आहेत. प्रश्नात विचारलेल्या चिन्हाच्या विरुद्ध बाजूला कोणते चिन्ह असेल?

DIRECTIONS: In the following questions four positions of the same dice are shown. Select the symbol opposite to the symbol as asked in the question.

ہدایات: نیچے کے سوالوں میں، ایک ہی پاسہ کی چار حالتیں دکھائی گئ ہیں اس علامت کو چنئے جو سوال میں پو چھی گئ علامت کے سامنے ہے۔

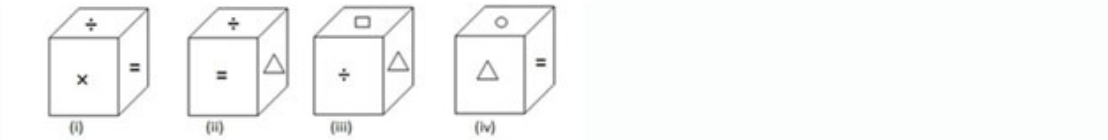

○ या चिन्हाच्या विरुद्ध बाजूला कोणते चिन्ह असेल?
Which symbol will be opposite to symbol ○ ?
کونسا نشان O نشان کی ضد ہوگی؟

A. ÷

B. =

C. ×

D. Δ

Answer: A. ÷

For More Info And Videos About TAIT-Exam Syllabus And Other Exam Visit My Channel
TAIT च्या 30 प्रश्नपत्रिका PDF
BADSHAHimp Available Request 9765226781
WWW.YouTube.com/BADSHAHimp
Subscribe My Channel

4

खालील प्रश्नात एक आकृतिबंध दाखविला आहे आणि तो कळीची आकृती म्हणून नोंदला आहे. कागदाच्या मागच्या बाजूने बघितल्यास मूळची कळीची आकृती अचूकपणे कशी दिसेल हे तुम्हाला ठरवायचे आहे.

DIRECTIONS: In the following questions, a design is given, marked as key figure. You have to determine which will be the exact view of the original key figure seen from the reverse side of the paper.

ہدایات: نیچے کے سوال میں نقش دیا گیا ہے، جس پر اہم شکل کا نشان لگا ہے آپ کو یہ طے کرنا ہے کہ اہم شکل کا قطعی منظر کاغذ کی الٹی طرف سے کونسا ہوگا؟

मुख्य आकृती
Main Figure
اصل شکل



(A) 

(B) 

(C) 

(D) 

Answer:

(A) 

5

भारताचे कोळसामंत्री कोण आहेत?

Who is the Minister of Coal in India?

بھارت کے کوئلہ منسٹر ہیں :

A.राव इंद्रजित सिंह
A.Rao Inderjit Singh
A.رائو اندرجیت سنگھ

For More Info And Videos About TAIT-Exam Syllabus And Other Exam Visit My Channel
TAIT च्या 30 प्रश्नपत्रिका PDF
BADSHAHimp Available Request 9765226781
WWW.YouTube.com/BADSHAHimp
Subscribe My Channel

	B.पीयूष गोयल B.Piyush Goyal B.پیوش گوئل
	C.सुरेश प्रभू C.Suresh Prabhu C.سریش پربھو
	D.यांपैकी कोणतेही नाही D.None of these D.انمیں سے کوئی نہیں
Answer:	B.पीयूष गोयल B.Piyush Goyal B.پیوش گوئل
6	DIRECTIONS: A sentence with an underlined phrasal verb is given below. Out of the four options, choose the one which can be substituted for the given phrasal Verb. New rules have been laid down to deal with tax evaders.
	A.vacated
	B.escaped
	C.deleted
	D.specified
Answer:	D.specified
7	DIRECTIONS: A sentence with an underlined phrasal verb is given below. Out of the four options, choose the one which can be substituted for the given phrasal Verb. You shouldn't bring up the topic of his son’s inter caste marriage while you are having a chat with him.
	A.introduce into discussion
	B.delete
	C.forget
	D.eliminate
Answer:	A.introduce into discussion

For More Info And Videos About TAIT-Exam Syllabus And Other Exam Visit My Channel
TAIT च्या 30 प्रश्नपत्रिका PDF Available Request 9765226781
BADSHAHimp
WWW.YouTube.com/BADSHAHimp
Subscribe My Channel

8 सूचना : खालील प्रत्येक प्रश्नात दोन विधाने I आणि II दिलेले आहेत. हे विधान एकतर स्वतंत्र कारण असू शकतात किंवा स्वतंत्र कारणांचे परिणाम असू शकतात. यांपैकी एक विधान इतर विधानाचा परिणाम असू शकतो. दोन्ही विधाने वाचा आणि खालीलपैकी कोणत्या उत्तराचा पर्याय या दोन्ही विधानांमधील संबंधांचे वर्णन करतो ते ठरवा.

विधान :
I. ग्रामीण भारतातील महिलांवरील हिंसाचाराचे प्रमाण वाढत आहे.
II. ग्रामीण भारतातील पुरुषांमध्ये दारू पिण्याचे प्रमाण वाढत आहे.

DIRECTIONS: Below in each question are given two statements I and II. These statements may be either independent causes or may be effects of independent causes. One of these statements may be the effect of the other statement. Read both the statements and decide which of the following answer choice correctly depicts the relationship between these two statements.

Statements:
I. Cases of domestic violence against women are increasing in rural India.
II. Alcohol consumption among men is increasing in rural India.

ہدایات: نیچے ہر سوال میں دو بیانات I اور II آزاد وجوہات یا پھر آزاد وجوہات کے اثرات ہو سکتے ہیں۔ یہ بیانات یا تو آ ان دیے گئے ہیں۔ دونوں بیانات پڑھیں اور فیصلہ کریں کہ نیچے دیے گئے کس جواب کا انتخاب ان بیانات میں سے ایک بیان دوسرے کا اثر ہو سکتا ہے۔ دونوں بیانات کے در میان تعلق کو ٹھیک سے ظاہر کرتا ہے۔

بیانات:
I – انڈیا کے دیہی علاقوں میں خواتین پر گھریلو تشدد کے واقعات میں اضافہ ہورہا ہے۔
II ۔ انڈیا کے دیہی علاقوں میں مردوں میں شراب نوشی میں اضافہ ہو رہا ہے۔

A.विधान I कारण आहे आणि विधान II त्याचा परिणाम आहे;
A.Statement I is the cause and statement II is its effect;
A. بیان نمبر I وجہ ہے اور بیان نمبر II اس کا اثر ہے۔

B.विधान II कारण आहे आणि विधान I त्याचा परिणाम आहे;
B.Statement II is the cause and statement I is its effect;
B.بیان نمبر II وجہ ہے اور بیان نمبر I اس کا اثر ہے۔

C.विधान I आणि II दोन्ही स्वतंत्र कारणे आहेत;
C.Both the statements I and II are independent causes;
C.دونوں بیانات نمبر I اور نمبر II آزاد وجوہات ہیں۔

D.विधान I आणि II दोन्ही स्वतंत्र कारणांचे परिणाम आहेत;
D.Both the statements I and II are effects of independent causes;
D.دونوں بیانات نمبر I اور نمبر II آزاد وجوہات کے اثرات ہیں۔

For More Info And Videos About TAIT-Exam Syllabus And Other Exam Visit My Channel
TAIT च्या 30 प्रश्नपत्रिका PDF
BADSHAHimp Available Request 9765226781
YouTube WWW.YouTube.com/BADSHAHimp
Subscribe My Channel

Answer:	B.विधान II कारण आहे आणि विधान I त्याचा परिणाम आहे; B.Statement II is the cause and statement I is its effect; B.بیان نمبر II وجہ ہے اور بیان نمبر I اس کا اثر ہے۔

9	खालीलपैकी शुद्ध शब्द कोणता ?
	A.कार्तीक्स्णन
	B.कर्तीक्स्णन
	C.कार्तिकस्नान
	D.कार्तीक्स्नन
Answer:	C.कार्तिकस्नान

10	Out of the given options, choose the one which is the correct active voice of the sentence given below. Are stories written by you?
	A.Do you write stories?
	B.Did you wrote stories?
	C.Have you written a stories?
	D.Is stories being written by you?
Answer:	A.Do you write stories?

11	विद्यार्थ्यांत प्रामाणिकपणाचा गुण ह्याने विकसित होऊ शकतो The trait of honesty in students can be developed through— طالب علموں میں ایمانداری کی خصوصیت کی ترقی کے ذریعے کی جا سکتی ہے۔
	A.अश्या मुलांच्या गटाला शाळेच्या सार्वजनिक ठिकाणी दंड देणे - A.Giving group punishment to such students in a school's public places like school assembly etc. A.اس طرح کے طالب علموں کو اسکول کی عوامی جگہوں پر سزا دینا مثلاً اسکول اسمبلی وغیرہ.

For More Info And Videos About TAIT-Exam Syllabus And Other Exam Visit My Channel
TAIT च्या 30 प्रश्नपत्रिका PDF
BADSHAHimp Available Request 9765226781
WWW.YouTube.com/BADSHAHimp
Subscribe My Channel

B.जगाच्या महान लोकांशी संबंधित कथा सांगून त्यांचे नैतिक मनोबल वाढविणे
B.Highlighting their morale by telling moral stories related to the greatmen of the world
B.دنیا کے عظیم انسانوں سے متعلق اخلاقی کہانیاں بتاتے ہوئے ان کے حوصلہ افزائی کا اظہار کرتے رہنا

C.आपल्या वैयक्तिक जीवनात चांगले आणि प्रामाणिक वागून मुलं समोर एक उदाहरण तयार करणे
C.Adopting all pious and honest measures in your personal life to create an example
C.اپنی ذاتی زندگی میں ایک مثال پیدا کرنے کے لئے تمام پر سکون اور ایماندار اقدامات کو اپنانا

D.त्यांच्या जीवनात चांगले गुण प्रदर्शित करणारे विद्यार्थ्यांना बक्षिसे देणे
D.Giving rewards to such students who have demonstrated this trait in their life
D.اس طرح کے طالب علموں کو انعام دینا جنہوں نے اپنی زندگی میں اس خاصیت کا مظاہرہ کیا ہے

Answer: C.आपल्या वैयक्तिक जीवनात चांगले आणि प्रामाणिक वागून मुलं समोर एक उदाहरण तयार करणे
C.Adopting all pious and honest measures in your personal life to create an example
C.اپنی ذاتی زندگی میں ایک مثال پیدا کرنے کے لئے تمام پر سکون اور ایماندار اقدامات کو اپنانا

12 निर्देश: खाली दिलेले प्रश्न वर्ण मालिकेवर आधारित आहेत. या प्रत्येक मालिकेत, काही अक्षरे गहाळ आहेत. योग्य पर्याय निवडा पाच पेक्षा अधिक अक्षरे गहाळ असल्यास, मालिकेतील शेवटचे पाच अक्षरे निवडा

A - - - EAB - D - B - - B -

DIRECTION: Questions given below are based on the letter series. In each of these series, some letters are missing. Select the correct alternative. If more than five letters are missing, select the last five letters of the series:

A - - - EAB - D - B - - B -

ہدایت نیچے دے ہے سوالات حرف سرج پر مشتمل ہیں . ہر میں کہیں حرف گمشدہ ہے . سہی اختیارات کو چنے . اگر پچ حرف گنمام ہو تو آخری پانچ حرفونکو چنے

A - - - EAB - D - B - - B -

A.BCDBA
A.BCDBA
A.BCDBA

B.BCDBE
B.BCDBE
B.BCDBE

C.BCABA
C.BCABA
C.BCABA

D.BCABC
D.BCABC
D.BCABC

For More Info And Videos About TAIT-Exam Syllabus And Other Exam Visit My Channel
TAIT च्या 30 प्रश्नपत्रिका PDF
BADSHAHimp Available Request 9765226781
WWW.YouTube.com/BADSHAHimp
Subscribe My Channel

Answer: C.BCABA
C.BCABA
C.BCABA

13 खलाशी, चित्रकार, वैमानिक हे याचे वरदान लाभलेले लोक आहेत

Sailors, Painters pilots, come under people who are blessed with

ملاح، پینٹر، پائلٹ ان لوگوں کے تحت آتے ہیں جنہیں اس ہنر سے نوازا گیا ہے

A.आंतर वैयक्तिक
A.Interpersonal
A. انٹرپرسنل

B.भाषिक बुद्धिमत्ता
B.Linguistic intelligence
B. زبانی ذہنیت

C.तार्किक बुद्धिमत्ता
C.Logical intelligence
C. منطقی ذہانت

D.अवकाशासंबंधी
D.spatial
D.مکانی قابلیت

Answer: D.अवकाशासंबंधी
D.spatial
D.مکانی قابلیت

14 **सूचना:** दिलेल्या चारांपैकी वेगळी (असंबद्ध) असणारी आकृती शोधून काढा.

DIRECTIONS: Find the odd figure from the given four figures.

ہدایات: دیئے گئے چار شکلوں میں سے طاق شکل کونسی ہے؟

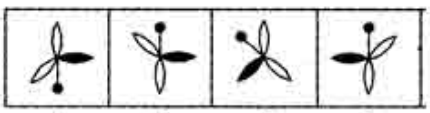

A. (A)

B. (B)

C. (C)

D. (D)

Answer: B. (B)

15 खालीलपैकी अशुद्ध वाक्य कोणते ?

A.त्याच्या सरबताची चवदार अजूनपण मला आठवते.

B.त्याला जवळच्या नात्यातलं असं कुणीही नव्हते.

C.त्याच्या काकाचे घर खूप मोठे होते.

D.त्याचे शिक्षण कितपत झाले माहित नाही.

Answer: A.त्याच्या सरबताची चवदार अजूनपण मला आठवते.

16 1 मी. चालल्यानंतर मीना डावीकडे वळली आणि आणखी 12 मी. चालली. पुन्हा ती डावीकडे वळली आणि 4 मी. चालली. आता ती पूर्व दिशेस प्रवास करत आहे. तिने आपला प्रवास कोणत्या दिशेस सुरु केला?

After walking for 1 m, Meena turned to her left and walked another 12 m. Again she turned to her left and walked for 4 m. Now she is travelling in East direction. In which direction did she start her journey?

1 میٹر تک چلنے کے بعد مینا اپنی بائیں جانب مڑجاتی ہے- اور مزید12 میٹر تک چلتی ہے- پھر سے وہ اپنی بائیں جانب مڑجاتی ہے اور 4 میٹر تک چلتی ہے- اب وہ مشرق کی جانب سفر کر رہی ہے- اس نے کس سمت میں اپنا سفر شروع کیا تھا؟

A.पश्चिम
A.West
A.مغرب

B.पूर्व
B.East
B.مشرق

C.उत्तर
C.North
C.شمال

D.दक्षिण
D.South
D.جنوب

For More Info And Videos About TAIT-Exam Syllabus And Other Exam Visit My Channel
TAIT च्या 30 प्रश्नपत्रिका PDF
BADSHAHimp Available Request 9765226781
YouTube WWW.YouTube.com/BADSHAHimp
Subscribe My Channel

Answer: A.पश्चिम
A.West
A.مغرب

17 निर्देश: खालील शब्दांची इंग्रजी शब्दकोशानुसार मांडणी करा.
शब्दकोशामधील मांडणीमध्ये कोणता शब्द चौथा येईल?
(a) Propense
(b) Prophet
(c) Prong
(d) Propine

DIRECTIONS: Arrange the following words according to the English Dictionary.
In dictionary, which word comes fourth in arrangement?

ہدایت: انگریزی لغت کے مطابق مندرجہ ذیل الفاظ کو مرتب کریں۔

لغت میں، ترتیب میں کونسا لفظ چوتھے پر آئیگا؟

A.Propense
A.Propense
A.Propense

B.Prophet
B.Prophet
B.Prophet

C.Prong
C.Prong
C.Prong

D.Propine
D.Propine
D.Propine

Answer: D.Propine
D.Propine
D.Propine

For More Info And Videos About TAIT-Exam Syllabus And Other Exam Visit My Channel
TAIT च्या 30 प्रश्नपत्रिका PDF
BADSHAHimp Available Request 9765226781
WWW.YouTube.com/BADSHAHimp
Subscribe My Channel

18 खालील आकृतीचा अभ्यास कार आणि दिलेल्या प्रत्येक प्रश्नाचे उत्तर द्या.

Study the diagram given below and answer each of the following questions.

مندرجہ ذیل دیئے گئے ڈایاگرام کا مطالعہ کریں اور مندرجہ ذیل سوالات کا جواب دیں.



चहा आणि वाईन घेणारे परंतु कॉफी न घेणारे किती लोक आहेत?

How many persons who take tea and wine but not coffee?

ان افراد کی تعداد کتنی ہے جو چائے اور شراب پیتے ہیں لیکن کوفی نہیں؟

A. 20

B. 17

C. 25

D. 15

Answer: B. 17

19 मुलांच्या रांगेत A डावीकडून 13 व्या क्रमांकावर तर उजवीकडून 17 व्या क्रमांकावर आहे. तर रांगेत एकूण किती मुले आहेत ?

In a row of children, A is 13th from the left and 17th from the right. How many children are there in the row?

بچھوں کی کتار میں، A بھانیں اور سے 13 وہ ہے ا دھانیں اور سے 17 وہ ہے. کتار میں کتنے بچھے ہے؟

A.30
A.30
A.30

B.29
B.29
B.29

C.32
C.32
C.32

D.28
D.28
D.28

For More Info And Videos About TAIT-Exam Syllabus And Other Exam Visit My Channel
TAIT च्या 30 प्रश्नपत्रिका PDF
BADSHAHimp Available Request 9765226781
WWW.YouTube.com/BADSHAHimp
Subscribe My Channel

Answer: B.29
B.29
B.29

20 जेव्हा मुलं आपल्या घरी आलेल्या नवीन आस्थापनांच्या उपस्थितीत आक्रमक वागतात, तेव्हा आपण अशा मुलाच्या पालकांना काय उपाय सुचवाल?

When a child exhibits aggressive behaviour in the presence of new-comers at home, what would you suggest to the parents of such a child in order to give some remedy?

جب بچہ گھر میں نئے آنے والے کی موجودگی میں جارحانہ رویہ اختیار کرتا ہے، تو آپ کو اس کے علاج کے لئے بچے کے والدین کو کیا تجویز دیں گے؟

A.पालकांनी मुलाच्या संगोपनाच्या वेळी मुलाकडे दुर्लक्ष केले त्या साठी त्यांना भोगावा
A.The parents have badly neglected the child during his upbringing, therefore they must pay for it
A.والدین نے اس کے پرورش کرنے کے دوران بچے کو بری طرح نظر انداز کیا ہے، لہذا انہیں اس کے لئے ادائیگی کرنا ضروری ہے

B.पालकांनी आपल्या मुलाच्या समस्येबद्दल जाणून घेण्याचा प्रयत्न केला पाहिजे आणि त्यानुसार काही उपाय करणे सुरू केले पाहिजे
B.The parents should attempt to know about their child's basic problem and begin some remedy accordingly
B.والدین کو اپنے بچے کی بنیادی مسئلہ کے بارے میں جاننے کی کوشش کرنا چاہئے اور اس کے مطابق کچھ علاج شروع کرنا چاہئے

C.आपल्या मुलाची समस्या खर्या अर्थाने सोडविण्यासाठी पालकांनी सल्लागारांचा सल्ला घ्यावा
C.The parents should consult a counsellor in order to remedy the child's problem in real sense
C.حقیقی انداز میں بچے کی مشکل کو حل کرنے کے لئے والدین کو ایک مشیر سے مشورہ کرنا چاہئے

D.आईवडिलांनी मुलाला अशा प्रकारचे वर्तणूक साठी दंड करावा, ह्याने हळूहळू मुल त्याचे वागण सुधारू शकेल
D.The parents should penalize the child for showing such a behaviour, gradually child may modify his behaviour
D.والدین کو ایسے رویے کے اظہار کے لئے بچے کو سزا دینا چاہئے، آہستہ آہستہ بچہ اپنے رویے میں تبدیلی کرسکتا ہے

Answer: B.पालकांनी आपल्या मुलाच्या समस्येबद्दल जाणून घेण्याचा प्रयत्न केला पाहिजे आणि त्यानुसार काही उपाय करणे सुरू केले पाहिजे
B.The parents should attempt to know about their child's basic problem and begin some remedy accordingly
B.والدین کو اپنے بچے کی بنیادی مسئلہ کے بارے میں جاننے کی کوشش کرنا چاہئے اور اس کے مطابق کچھ علاج شروع کرنا چاہئے

21 प्रमाणित उपलब्धी चाचणी (स्टॅण्डर्डाइज्ड अचिएव्हमेन्ट टेस्ट) ची खालीलपैकी एक मुख्य विशेषता आहे –

Which of the following is the main characteristics of a standardized Achievement Test?

معیاری اہلیت ٹیسٹ کی اہم خصوصیات مندرجہ ذیل میں سے کون سی ہیں؟

For More Info And Videos About TAIT-Exam Syllabus And Other Exam Visit My Channel
TAIT च्या 30 प्रश्नपत्रिका PDF Available Request 9765226781
BADSHAHimp
WWW.YouTube.com/BADSHAHimp
Subscribe My Channel

A.निष्पक्षता
A.Objectivity
A.مقصودیت

B.वैधता
B.Validity
B.اہلیت

C.विश्वसनीयता
C.Reliability
C.استحکام

D.वरील सर्व
D.All the above
D.مذکورہ تمام

Answer: D.वरील सर्व
D.All the above
D.مذکورہ تمام

22 'दांभिकपणा' या शब्दाचा विरुद्धार्थी शब्द कोणता ?

A.ढोंग

B.प्रामाणिकपणा

C.भोंदुगिरी

D.दंभ

Answer: B.प्रामाणिकपणा

23 हिना आणि मीना यांच्या मध्ये 4:5 या प्रमाणामध्ये 45 सफरचंदे वाटा.

Divide 45 apples between Heena and Meena in ratio of 4:5?

حنا اور مینا کے درمیان 45 سیب کو 4:5 کے تناسب میں تقسیم کریں؟

A.15, 30
A.15, 30
A.15, 30

B.5, 40
B.5, 40
B.5, 40

C.35, 10
C.35, 10
C.35, 10

D.20, 25
D.20, 25
D.20, 25

Answer: D.20, 25
D.20, 25
D.20, 25

24 दोन चौकोनांची क्षेत्रफळे ही 225 : 256 या गुणोत्तरात आहेत. त्यांच्या परिमितींचे गुणोत्तर काय असेल:

The areas of two squares are in the ratio 225 : 256. What is the ratio of their perimeters:

دو مربع کے رقبہ کا تناسب 225: 256 ہے۔ انکےاحاطہ کا تناسب کیا ہے؟

A.225:256
A.225:256
A.225:256

B.256:225
B.256:225
B.256:225

C.15:16
C.15:16
C.15:16

D.16:15
D.16:15
D.16:15

Answer: C.15:16
C.15:16
C.15:16

25 निर्देश: खालील मालिकेतील गहाळ संख्या शोधा.

5, 7, ..., 9, 7, 11, 8, 13

DIRECTION: Find the missing number in the following series.

5, 7, ..., 9, 7, 11, 8, 13

ہدایات: جیل کے سرج مے گمشدہ نمبر کھوجے .

5, 7, ..., 9, 7, 11, 8, 13

A.8
A.8
A.8

B.6
B.6
B.6

C.19
C.19
C.19

D.7
D.7
D.7

Answer: B.6
B.6
B.6

26 A हा B पेक्षा दुप्पट गतिमान आहे आणि B हा C पेक्षा तिप्पट गतिमान आहे. C द्वारे 1/2 तासांमध्ये पार झालेला प्रवास हा A द्वारे किती वेळात पार होईल _____.

A is twice as fast as B and B is thrice as fast as C. The journey covered by C in 1/2 hours will be covered by A in _____.

A،B سے دوگنا تیز رفتار ہے اور B، C سے تین گنا تیز رفتار ہے ، C نے 1/2گھنٹے میں طے کیا گیا سفر Aکی جانب سے کتنے وقت میں طے کرے گا۔

A.5 मिनिटे
A.5 minutes
A.5 منٹ

B.15 मिनिटे
B.15 minutes
B.15 منٹ

C.1 तास
C.1 hour
C.1 منٹ

D.1.5 तास
D.1.5 hours
D.1.5 منٹ

Answer: A.5 मिनिटे
A.5 minutes
A.5 منٹ

27 जर पेनाला पेन्सिल म्हटले, पेन्सिलला शार्पनर म्हटले, शार्पनरला खोडरबर म्हटले, खोडरबरला पट्टी म्हटले, पट्टीला भूमिती म्हटले. तर पेन्सिलला टोक करण्यासाठी खालीलपैकी काय वापरले जाते?

If pen is called pencil, pencil is called sharpener, sharpener is called eraser, eraser is called scale, scale is called geometry. Which of the following is used for sharp a pencil?

اگر قلم کو پنسل کہا جائے، پنسل کو قلم تراش، قلم تراش کو ربر، ربر کو میزان اور میزان کو علم ہندسہ (جیومیٹری) کہا جائے تو قلم تراشنے کے لیے مندرجہ ذیل میں سے کیا استعمال کیا جاتا ہے؟

A.पेन्सिल
A.Pencil
A.پنسل

B.शार्पनर
B.Sharpener
B.قلم تراش

C.खोडरबर
C.Eraser
C.ربر

D.भूमिती
D.Geometry
D.(جیومیٹری علم ہندسہ)

Answer: C.खोडरबर
C.Eraser
C.ربر

28 खालीलपैकी कोणत्या जोडी कार्टिलागिनस मास्यांमध्ये येतात?

Which one of the following pairs belongs to Cartilaginous Fish?

مندرجہ ذیل جوڑوں میں سے کس کا تعلق کرکری مچھلی سے ہے؟

A.शार्क आणि टुना
A.Shark and Tuna
A.شارک اور ٹونا

B.शार्क आणि स्टिंगरे
B.Shark and Stingray
B.شارک اور سٹنگرے

C.स्केट्स आणि हिल्सा
C.Skates and Hilsa
C.اسکیٹس اور ہیلسا

D.रे आणि ईल
D.Ray and Eel
D.رے اور ایل

Answer: B.शार्क आणि स्टिंगरे
B.Shark and Stingray
B.شارک اور سٹنگرے

29 'हेकेखोर' या शब्दाचा समानार्थी शब्द कोणता ?

A.समंजस

B.सुज्ञ

C.एककल्ली

D.समजूतदार

Answer: C.एककल्ली

30	या मालिकेतील मध्यक शोधा. 24, 6, 14 Find the median of the series: 24, 6, 14 دی ہوئی سیریز کا اوسط (میڈین) ہوگا 24, 6, 14
	A.13 A.13 A.13
	B.14 B.14 B.14
	C.15 C.15 C.15
	D.18 D.18 D.18
Answer:	B.14 B.14 B.14
31	जम्मू आणि काश्मिरचे विशिष्ट घटनात्मक स्थान आहे: Special constitutional position of Jammu & Kashmir is: 2. جموں و کشمیر کا خصوصی آئینی پوزیشن ہے:
	A.त्यांचे स्वत:चे संविधान आहे. A.It has its own constitution A. اس کا خود اپنا آئین ہے
	B.त्यांचे स्वत:चे संविधान नाही. B.It has not its constitution. B. اس کا خود اپنا آئین نہیں ہے
	C.ते भारतीय संविधानाच्या वर आहे. C.It is above Indian constitution C. یہ بھارتی آئین سے اوپر ہے

D.भारतीय कायदा लागू नाही.
D.Indian laws are not applicable.
D. بھارتی قوانین لاگو نہیں ہوتے ہیں.

Answer: A.त्यांचे स्वत:चे संविधान आहे.
A.It has its own constitution
A. اس کا خود اپنا آئین ہے

32 एका विशिष्ट सांकेतिक भाषेमध्ये, जर MYSTERY हा शब्द ZLFGREL असा कूटबध्द केला जात असेल, PURSUE हा शब्द त्या भाषेत कसा कूटबध्द केला जाईल?

In a certain code language, if the word MYSTERY is coded as ZLFGREL, then how is the word PURSUE coded in that language?

ایک مخصوص ضابطے کی زبان میں، اگر لفظ MYSTERY کو ZLFGREL لکھا جاتا ہے، تو اس زبان میں لفظ PURSUE کو کیسے لکھاجائیگا؟

A.KFIHFV
A.KFIHFV
A.KFIHFV

B.CHFEIR
B.CHFEIR
B.CHFEIR

C.CHEFHR
C.CHEFHR
C.CHEFHR

D.CHEGIR
D.CHEGIR
D.CHEGIR

Answer: C.CHEFHR
C.CHEFHR
C.CHEFHR

33 खालीलपैकी काय पृथ्वीच्या सर्वात जवळ आहे?

Which among the following is closest to Earth?

مندرجہ ذیل میں سے جو زمین کے قریب ہے؟

A.सुर्य
A.Sun
A. سورج

B.चंद्र
B.Moon
B. چاند

C.ध्रुवतारा
C.Pole Star
C. قطب ستارہ

D.शनी
D.Saturn
D. زحل

Answer: B.चंद्र
B.Moon
B. چاند

34 सरळ रूप द्या:
1575 + 2747 + 5399 – 2646 =?

Simplify:
1575 + 2747 + 5399 – 2646 =?

آسان بنائیں:
1575 + 2747 + 5399 – 2646= ?

A.7075
A.7075
A.7075

B.2541
B.2541
B.2541

C.1235
C.1235
C.1235

D.1245
D.1245
D.1245

Answer: A.7075
A.7075
A.7075

35 सूचना: खालील प्रश्नांमध्ये दिलेल्या पर्यायांमधून संबंधित अक्षर/शब्द/संख्या निवडा.

वीज : तार ::

DIRECTIONS: In the following question, select the related letter/word/number from the given alternatives.

ELECTRICITY: CABLE ::

سمت: مندرجہ ذیل سوال میں، دیے گئے متبادل سے متعلقہ حرف/لفظ/نمبر منتخب کریں۔

الیکٹریسٹی : کیبل ::

A.विमान: आकाश
A.Airplane: Sky
A.ہوائی جہاز: آسمان

B.उष्णता : अग्नी
B.Heat : Fire
B.گرمی : آگ

C.हवा : पंखा
C.Air: Fan
C.ہوا: پنکھا

D.पाणी : वाहिनी
D.Water: Pipe
D.پانی: پائپ

Answer: D.पाणी : वाहिनी
D.Water: Pipe
D.پانی: پائپ

36 झेब्रा क्रॉसिंगवरून चालतांना

While walking through the Zebra Crossing

زیبرا کراسنگ پر چلتے وقت

A.प्रथम उजवीकडे आणि नंतर डावीकडे पहावे.
A.First look towards right and then left.
A.پہلے دائیں جانب اور پھر بائیں جانب دیکھئے.

B.प्रथम सरळ पहा आणि मग उजवीकडे पहावे.
B.First look straight and then right
B.پہلے سامنے دیکھیں اور پھر دائیں جانب

C.प्रथम डावीकडे पहावे आणि मग उजवीकडे पहावे.
C.First look towards left then right
C.پہلے بائیں جانب اور پھردائیں جانب دیکھئے.

D.प्रथम सरळ पहावे मग डावीकडे पहावे.
D.First look straight and then left
D.پہلے سامنے دیکھیں اور پھر بائیں جانب

Answer: A.प्रथम उजवीकडे आणि नंतर डावीकडे पहावे.
A.First look towards right and then left.
A.پہلے دائیں جانب اور پھر بائیں جانب دیکھئے.

37 अनुवंशिकता ह्याच्याशी संबंधित आहे

Heredity is associated with—

میراث کا تعلق ہے—

A.आनुवंशिकता वाहक
A.Genes
A.موروثی جراثیم

B.भौतिक संरचना
B.Physical structure
B.جسمانی ساخت

C.मानसिक पातळी
C.Mental level
C.دماغی سطح

D.शरीरशास्त्र
D.Physiology
D.نفسیات

Answer: A.आनुवंशिकता वाहक
A.Genes
A.موروثی جراثیم

38	टीएटी याचे संक्षिप्त रुप आहे- TAT is a short form for تے اے تے ایک مختصر شکل ہے
	A.एपरसेपशन टेस्ट A.The Apperception test A.اپپرکپتیوں ٹیسٹ
	B.थॅमिटीक एपरसेपशन B.Thematic Apperception B.تھماٹک اپپرکپتیوں
	C.थॅमिटीकएप्टीटीट्युडटेस्ट C.Thematic Aptitude test C.تھماٹک اپتیندے ٹیسٹ
	D.त्रू एपरसेपशन टेस्ट D.True Apperception test D.ترے اپپرکپتیوں ٹیسٹ
Answer:	B.थॅमिटीक एपरसेपशन B.Thematic Apperception B.تھماٹک اپپرکپتیوں
39	मिथिला लोकचित्रकलेला म्हणतात Mithila Folk Painting’ is popularly known as متھیلا لوک پینٹنگ 'عام طور پر جانا جاتا ہے
	A.वारजेनी A.Warjli A. ورلی
	B.मंदाना B.Mandana B. مانڈنا
	C.मधुबनी C.Madhubani C. مدھوبنی
	D.अल्पना D.Alpana D.الپنا

Answer:	C.मधुबनी C.Madhubani C. مدھوبنی

40	बेरीबरी याच्या कमतरतेमुळे होतो Beriberi is due to deficiency of بیری بیری مرض کس چیز کی کمی سے ہوتا ہے؟
	A.जीवनसत्व –B6 A.Vitamin –B6 A.وٹامن –B6
	B.जीवनसत्व – B12 B.Vitamin – B12 B.وٹامن –B12
	C.जीवनसत्व – B2 C.Vitamin – B2 C.وٹامن –B2
	D.जीवनसत्व – B1 D.Vitamin – B1 D.وٹامن –B1
Answer:	D.जीवनसत्व – B1 D.Vitamin – B1 D.وٹامن –B1

41	$y^2 – 11x + 30 = 0$ या वर्गसमीकरणाची मुळे आहेत: The roots of the quadratic equation $y^2 – 11x + 30 = 0$ are: مربع مساوات کے روٹ $y^2 – 11x + 30 = 0$ ہیں:
	A.-6, -5 A.-6, -5 A.-6, -5
	B.6, 5 B.6, 5 B.6, 5

	C.7, 5 C.7, 5 C.7, 5
	D.8, 5 D.8, 5 D.8, 5
Answer:	B.6, 5 B.6, 5 B.6, 5

42	खालीलपैकी अशुद्ध शब्द कोणता ?
	A.चरितार्थ
	B.चलबीचल
	C.चविष्ट
	D.चहाडी
Answer:	B.चलबीचल

43 सूचना: अर्थपूर्ण परिच्छेद निर्माण करण्यासाठी, खाली दिलेली (P), (Q) (R), (S) आणि (T) ही पाच वाक्ये योग्य अनुक्रमाने पुनर्रचना करा; त्यांनतर खालील प्रश्नांची उत्तर द्या.

P. आपल्या नैराश्यातून मासा म्हणतो, "मी लहान असल्याने कृपया मला सोडून द्या आणि मी तुमच्या काही कामाचा नाही."
Q. शहाणा कोळी म्हणला," आतापर्यंत जो अस्तित्त्वात नव्हता त्याच्यासाठी माझा निश्चित फायदा मी सोडणार नाही."
R. एके दिवशी, तो फक्त एक छोटासा मासा पकडतो.
S. एकेकाळी एक कोळी होता, मासे पकडण्यावर त्याचा उदरनिर्वाह चालत असे.
T. मला पुन्हा नदीत सोडून दे आणि मी मोठा झाल्यानंतर मला पुन्हा पकड आणि जास्त पैसे कमव.

पुनर्रचना केल्यानंतर खालीलपैकी कोणते वाक्य पहिले असेल?

DIRECTION: Rearrange the following five sentences (P), (Q), (R), (S) and (T) in the proper sequence to form a meaningful paragraph; then answer the questions given below them.
P. The fish, in its desperation to live, said “Please leave me as I am small and of no use to you.
Q. The wise fisherman replied, “I will not give up a certain profit for one that doesn’t exist yet.”
R. One day, he was able to catch only one small fish.
S. There was once a fisherman whose livelihood depended on his catching of fish.
T. Let me back into the river so that you can catch me again and make more money when I grow bigger.”

Which of the following should be the FIRST sentence after rearrangement?

ہدایات: ان پانچ جملوں (P)، (Q)، (R)، (S) اور (T) کو با معنی پیرا بنانے کے لئے دوبارہ ترتیب دیجئے، پھر نیچے دے گئے سوالوں کے جواب دیجئے

P. مچھلی نے زندہ رہنے کی چاہت میں کہا "مہربانی کر کے مجھے چھوڈ دو کیوں کہ امن چھوٹی ہوں اور آپکے کسی کام کی نہیں ہوں.
Q. عقل مند مچھوارے نے جواب دیا، "جو ابھی پیدا نہی ہوا میں اسکے بدلے مقرر نفع نہی کھو دونگا.
R. ایک دن، وو خالی ایک چھوٹی مچھلی پکڑنے میں کامیاب ہوا.
S. ایک بار ایک مچھوارہ تھا جسکی روزی مچھلی پکڑنے پر دارمدار تھا.
T. مجھے دریا میں واپس ڈال دو تاکی تم مجھے دوبارہ پکڑو اور زیادہ پینسے بناؤ جب میں بڈی ہو جاؤنگی.

دوبارہ ترییب دینے کے بعد کون سا جملہ پہلے ہونا چاہیے؟

A.S
A.S
A.S

B.P
B.P
B.P

C.Q
C.Q
C.Q

D.T
D.T
D.T

Answer: A.S
A.S
A.S

44 निर्देश: मालिका पूर्ण करा

AE, FJ, KO, ?, UY

DIRECTION: Complete the series

AE, FJ, KO, ?, UY

ہدایت اس سرج کو مکمّل کرو

AE, FJ, KO, ?, UY

A.PT
A.PT
A.PT

B.PS
B.PS
B.PS

C.PU
C.PU
C.PU

D.PR
D.PR
D.PR

Answer: A.PT
A.PT
A.PT

45 ‘कृश’ या शब्दाचा समानार्थी शब्द कोणता ?

A.काटकुळा

B.स्थूल

C.सशक्त

D.कृमी

Answer: A.काटकुळा

46 तीन पाईप A, B आणि C हे एकत्रितरित्या एक टाकी 6 तासांत भरतात. 2 तास एकत्र काम केल्यानंतर C बंद केला गेला. A आणि B ने उरलेली टाकी 8 तासांत भरली. एकट्या पाईप C द्वारे टाकी भरण्यास लागणारी वेळ:

Three pipes A, B and C together can fill a cistern in 6 hours. After working together for 2 hours, C is closed. A and B fill the remaining cistern in 8 hours. The time in which the cistern can be filled by pipe C alone will be:

تین پائپ A ، B اور C مل کر ایک ٹنکی کو 6 گھنٹوں میں بھر سکتے ہیں۔2 گھنٹے مل کر کر کام کرنے کے بعد C بند ہو گیا ۔ A اور B باقی ٹنکی کو 8 گھنٹوں میں بھر سکتے ہیں۔ پائپ C مل کر باقی ٹنکی کو اکیلے بھر نے کے لیے؟ اِس ٹنکی کو کتنا وقت درکار ہو گا

A.11 तास
A.11 hours
A.11گھنٹے

B.9 तास
B.9 hours
B.9گھنٹے

C.12 तास
C.12 hours
C.12گھنٹے

D.10 तास
D.10 hours
D.10گھنٹے

Answer: C.12 तास
C.12 hours
C.12گھنٹے

47 कोणता देश युरोप आणि आशिया दोन्हींमध्ये पडतो?

Which country falls in Europe & Asia both?

کونسا ملک یورپ اور ایشیا دونوں میں آتا ہے :

A.फ्रान्स
A.France
A.فرانس

B.ग्रीस
B.Greece
B.گریس

C.बेल्जियम
C.Belgium
C.بیلجیم

D.रशिया
D.Russia
D.روس

Answer: D.रशिया
D.Russia
D.روس

48 4.5% प्रति वर्ष सरळ व्याज या दराने रू. 450 या रकमेवर रू. 81 व्याज मिळवण्यासाठी किती वर्षे लागतील?

How much time will it take for an amount of Rs.450 to yield Rs.81 as interest at 4.5% per annum of simple interest?

81 روپیہ بحیثیت منافہ 4.5٪ کی در سے رقم 450 روپیہ پر ہونے میں کتنا وقت لگے گا؟

A.3.5 वर्षे
A.3.5 years
A. 3.5سال

B.4 वर्षे
B.4 years
B. 4سال

C.4.5 वर्षे
C.4.5 years
C.4.5 سال

D.5 वर्षे
D.5 years
D.5سال

Answer: B.4 वर्षे
B.4 years
B. 4سال

49 एकत्रितपणाच्या जाणीवमुळे तयार केलेल्या समुहाला म्हणतात

A group is kept by the feeling of togetherness is called as

گروپ ’ معیت کے احساس کے ذریعہ قائم رہے تو اسے_____ کہتے ہیں۔‘

A.सामाजिकरण
A.Socialization
A.سماج کاری

B.काहीही असेल
B.Whenever
B.جب کبھی (Whenever)

C.मॉडलिंग
C.Modeling
C.موڈلنگ

D.संवाद
D.Interactions
D.باہمی اتصال ورابطہ

Answer: B.काहीही असेल
B.Whenever
B.جب کبھی (Whenever)

50 एका घनाला रंगवून किमान शक्य संख्येचे काप करून 80 लहान पण एकसारख्या तुकड्यांमध्ये कापले गेले आहे. तंतोतंतपणे रंगवलेले तीन चेहरे असलेले किती लहान तुकडे आहेत?

A cube is painted and cut into 80 smaller but identical pieces by making the minimum possible number of cuts.
How many smaller pieces have exactly three painted faces?

ایک کیوب کو ایک جیسے 80 ٹکڑوں میں رنگ دے کر کاٹا گیا ہے۔ کم سے کم ممکن کٹ لگاتے ہوئے, کتنے حتمی چھوٹے ٹکڑے ہوں گے جن کے 3 منہ رنگین ہوں گے؟

A.12
A.12
A.12

B.8
B.8
B.8

C.36
C.36
C.36

D.24
D.24
D.24

Answer: B.8
B.8
B.8

51 **सूचना:** दिलेल्या पर्यायांमधून श्रेणी पूर्ण करणारी योग्य आकृती निवडा.

DIRECTIONS: Complete the series by choosing right figure from the given choices.

ہدایات: دیئے گئے اختیارات میں صحیح شکل کا انتخاب کر کے سیریز کو مکمل کیجیئے۔

Problem Figures

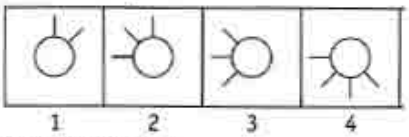

Answer Figures

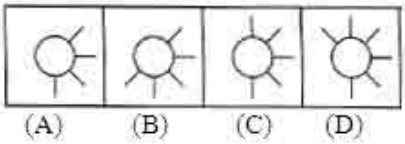

A. (A)

B. (B)

C. (C)

D. (D)

Answer: C. (C)

52 अनुक्रम: 5, 10, 15,…… चे 9वे पद शोधा

Find the 9th term of the sequence: 5, 10, 15,……

15 ,10 ,5 :؟ اس سرج کی نووی ٹرم کیا ہے,……

A.42
A.42
A.42

B.45
B.45
B.45

C.48
C.48
C.48

D.51
D.51
D.51

Answer: B.45
B.45
B.45

53 दिलेली अदलाबदल : चिन्हे - आणि ×, तसेच आकडे 9 आणि 15 ; तर 15 + 7 ÷ 7 × 4– 9 चे मूल्य किती ?

Given interchanges: signs - and ×, and numbers 9 and 15; then the value of 15 + 7 ÷ 7 × 4 - 9 is

دیئے گئے تبادلے: علامات - اور ×، اور نمبر 9اور 15؛ تو 15 + 7÷ 7× 4 - 9کی تعداد ہے

A.50
A.50
A.50

B.-50
B.-50
B.-50

C.40
C.40
C.40

D.-40
D.-40
D.-40

Answer: B.-50
B.-50
B.-50

54	सत्यजित रे हे प्रख्यात _____ होते Satyajit Ray was an eminent – ستیہ جیت رے ایک مشہور :
	A.लेखक A.Author A.مصنف ہیں
	B.चित्रपट दिग्दर्शक B.Film Director B.فلم ہدایت کار ہیں
	C.वरीलपैकी दोन्ही C.Both of the above C.اوپردئے ہوے دونوں
	D.यांपैकी कोणतेही नाही D.None of these D.انمیں سے کوئی نہیں
Answer:	C.वरीलपैकी दोन्ही C.Both of the above C.اوپردئے ہوے دونوں

55 सूचना: अर्थपूर्ण परिच्छेद निर्माण करण्यासाठी, खाली दिलेली (P), (Q) (R), (S) आणि (T) ही पाच वाक्ये योग्य अनुक्रमाने पुनर्रचना करा; त्यांनतर खालील प्रश्नांची उत्तर द्या.

P. आपल्या नैराश्यातून मासा म्हणतो, "मी लहान असल्याने कृपया मला सोडून द्या आणि मी तुमच्या काही कामाचा नाही."
Q. शहाणा कोळी म्हणला," आतापर्यंत जो अस्तित्त्वात नव्हता त्याच्यासाठी माझा निश्चित फायदा मी सोडणार नाही."
R. एके दिवशी, तो फक्त एक छोटासा मासा पकडतो.
S. एकेकाळी एक कोळी होता, मासे पकडण्यावर त्याचा उदरनिर्वाह चालत असे.
T. मला पुन्हा नदीत सोडून दे आणि मी मोठा झाल्यानंतर मला पुन्हा पकड आणि जास्त पैसे कमव.

पुनर्रचना केल्यानंतर खालीलपैकी कोणते वाक्य तिसरे असेल?

DIRECTION: Rearrange the following five sentences (P), (Q), (R), (S) and (T) in the proper sequence to form a meaningful paragraph; then answer the questions given below them.
P. The fish, in its desperation to live, said “Please leave me as I am small and of no use to you.
Q. The wise fisherman replied, “I will not give up a certain profit for one that doesn’t exist yet.”
R. One day, he was able to catch only one small fish.
S. There was once a fisherman whose livelihood depended on his catching of fish.
T. Let me back into the river so that you can catch me again and make more money when I grow bigger.”

Which of the following should be the THIRD sentence after rearrangement?

ہدایات: ان پانچ جملوں (P)، (Q)، (R)، (S) اور (T) کو با معنی پیرا بنانے کے لئے دوبارہ ترتیب دیجئے، پھر نیچے دے گئے سوالوں کے جواب دیجئے

P. مچھلی نے زندہ رہنے کی چاہت میں کہا "مہربانی کر کے مجھے چھوڈ دو کیوں کہ امن چھوٹی ہوں اور آپکے کسی کام کی نہیں ہوں.
Q. عقل مند مچھوارے نے جواب دیا، "جو ابھی پیدا نہی ہوا میں اسکے بدلے مقرر نفع نہی کھو دونگا.
R. ایک دن، وو خالی ایک چھوٹی مچھلی پکڑنے میں کامیاب ہوا.
S. ایک بار ایک مچھوارہ تھا جسکی روزی مچھلی پکڑنے پر دارمدار تھا.
T. مجھے دریا میں واپس ڈال دو تاکی تم مجھے دوبارہ پکڑو اور زیادہ پینسے بناؤ جب میں بڈی ہو جاؤنگی.

دوبارہ ترییب دینے کے بعد کون سا جملہ تیسرا ہونا چاہیے؟

A.P
A.P
A.P

B.Q
B.Q
B.Q

C.R
C.R
C.R

D.S
D.S
D.S

Answer: A.P
A.P
A.P

56

$$\sqrt{49} = ?$$

A. 2

B. 1

C. 7

D. 14

Answer: C. 7

57 भारतात कोणत्या एक्सप्रेसवेला राष्ट्रीय एक्सप्रेसवे1 म्हणून ओळखले जाते?

Which expressway is known as National expressway 1 in India?

کون سا ایکسپریس وے بھارت میں نیشنل ایکسپریس وے 1 کے طور پر جانا جاتا ہے؟

A.अहमदाबाद वडोदरा एक्सप्रेसवे
A.Ahmedabad Vadodara Expressway
A. احمد آباد وڈودرا ایکسپریس وے

B.दिल्ली जयपूर एक्सप्रेसवे
B.Delhi Jaipur Expressway
B. دہلی جے پور ایکسپریس وے

C.दिल्ली गुडगाव एक्सप्रेसवे
C.Delhi Gurgaon Expressway
C. دہلی گڑگاؤں ایکسپریس وے

D.वेस्टर्न एक्सप्रेसवे
D.Western Expressway
D. مغربی ایکسپریس وے

Answer: A.अहमदाबाद वडोदरा एक्सप्रेसवे
A.Ahmedabad Vadodara Expressway
A. احمد آباد وڈودرا ایکسپریس وے

58 A आणि B दांपत्य आहेत. X आणि Y भाऊ आहेत. A हा X चा भाऊ आहे. मग Y आणि B चे नाते काय?

A and B are a couple. X and Y are brothers. A is the brother of X. How is Y related to B?

A اور B جوڑی ہے. X وار Y بھائی بھائی ہے. X A کا بھائی ہے. Y کا B سے کیا رشتہ تھا؟

A.भाऊ
A.Brother
A.بھائی

B.जावई
B.Son-in-law
B.داماد

C.देवार
C.Brother-in-law
C.دیوار

D.मुलगा
D.Son
D.بیٹا

Answer: C.देवार
C.Brother-in-law
C.دیوار

59 ई-मेल पाठविताना, ही ओळ संदेशाची सामग्री वर्णन करते.

When sending an e-mail, the line describes the contents of the message -

ایک ای میل بھیجتے وقت، پیغام کے مواد کو بیان کرنے والی لائن ہے۔

A.विषय
A.Subject
A.سبجیکٹ

B.ला
B.To
B.ٹو

C.मजकूर
C.Contents
C.مواد

D.सिसि
D.CC
D.سی سی

Answer: A.विषय
A.Subject
A.سبجیکٹ

60 विधान:
भारताच्या राष्ट्रीय फूल अपमान वाढत आहेत. लोकांनी कमळाचे स्टेम खायला सुरुवात केली आहे.

कृतीचा कोर्स:
I. लोटस स्टेम खाल्लेल्या लोकांविरुद्ध कठोर कारवाई केली पाहीजे.
II. कमळांचा अपमान करणार्या लोकांना शिक्षा देण्यासाठी एक कायदा केला पाहिजे.

Statement:
Insults to national flower of India are increasing. People have started eating lotus stems.

Course of actions:
I. Strict action should be taken against people eating Lotus stems.
II. A law should be made to punish people insulting lotus

بیان:
انڈیا کے قومی پھول کی بے عزتی میں اضافہ ہو رہا ہے، لوگوں نے لوٹس کا تنا کھانا شروع کر دیا ہے۔

لائحہ عمل:
I۔ لوٹس کا تنا کھانے والے لوگوں کے خلاف سخت کاروائی کی جانی چاہیے۔
II۔ لوٹس کی بے عزتی کرنے والے لوگوں کو سزا دینے کے لیے قانون بنایا جانا چاہیے۔

A.फक्त I अनुसरून आहे
A.Only I follows
A. صرف I لاگو ہو گا۔

B.फक्त II अनुसरण करते आहे
B.Only II follows
B. صرف II لاگو ہو گا۔

C.एकतर I किंवा II अनुसरून आहे
C.Either I or II follows
C. I یا II میں سے ایک لاگو ہو گا۔

D.I किंवा II दोन्हीपैकी काहीही अनुसरण करत नाही
D.Neither I nor II follows
D. I اور II میں سے کوئی بھی لاگو نہیں ہو گا۔

Answer: D.I किंवा II दोन्हीपैकी काहीही अनुसरण करत नाही
D.Neither I nor II follows
D. I اور II میں سے کوئی بھی لاگو نہیں ہو گا۔

61	शंकू ही ----- आहे. A cone is a ----- کون (cone) ایک----------ہے
	A.समतल आकृती A.Plane figure A.سادہ شکل
	B.कंस B.Curve B.خم
	C.घन आकृती C.Solid Figure C.ٹھوس شکل
	D.यांपैकी कोणतेही नाही D.None of these D.کوئی نہیں
Answer:	C.घन आकृती C.Solid Figure C.ٹھوس شکل

62	दिलेल्या गटातील गहाळ संख्या निवडा. Select the missing number from, the given responses. نیچے کے سوال میں ، گمشدہ نمبر کھوجیے جو شرطیں پورا کرتا ہو . 
	A. 36
	B. 46
	C. 40
	D. 26
Answer:	A. 36

63 माउंट एव्हरेस्ट पृथ्वीचा सर्वात उच्च पर्वत आहे. त्याचे सर्वात उच्च टोक समुद्रीपातळीच्या ..... वर आहे.

Mt. Everest is the highest mountain on Earth, its peak reaches ..... above sea level.

ماؤنٹ ایورسٹ، زمین پر سب سے اونچا پہاڑ ہے اس کی چوٹی سطح سمندر سے.....اونچائی پر ہے۔

A.8848मी.
A.8848m
A.8848میٹر

B.18888 मी.
B.18888m
B.18888میٹر

C.8000 मी.
C.8000m
C. 8000میٹر

D.848 मी.
D.848m
D.848میٹر

Answer: A.8848मी.
A.8848m
A.8848میٹر

64 सूचनाः दिलेल्या पर्यायांमधून ऍनालॉगस शब्द निवडा.

अमीटरचा संबंध विद्युयत प्रवाहासोबत आहे जसा लॅक्टोमीटरचा संबंध ... सोबत आहे.

DIRECTIONS: Choose the analogous word from the given alternatives.

Ammeter is to Electric Current as Lactometer is to _____.

ہدایات: دیے گئے متبادل سے مطابق لفظ کا انتخاب کریں

. ام میٹر کا تعلق بجلی کے ساتھ ویسا ہی ہے جیسا کہ لاکتومیٹر کا ---------- کے ساتھ

A.पावसाचे प्रमाण
A.Amount of rain
A.بارش کی مقدار

B.दुधाची शुद्धता
B.Purity of Milk
B. دودھ کی پارسایی

	C.वायूंची घनता C.Density of Gases C. گسس کا گناپن
	D.उच्च तापमान D.High temperatures D.بلند حرارت
Answer:	B.दुधाची शुद्धता B.Purity of Milk B. دودھ کی پارسایی

65	तुलना करता येणार नाही असा -
	A.अतुलनीय
	B.अनमोल
	C.अगडबंब
	D.अतिसूक्ष्म
Answer:	A.अतुलनीय

66	DIRECTIONS: A sentence with an underlined word is given below. Find the Word which is most similar in meaning to the underlined word. The critical teacher was quick to censure her students for even small mistakes.
	A.Criticize
	B.Appreciate
	C.Inspire
	D.Encourage
Answer:	A.Criticize

67 प्राथमिक शालेय स्तरावर आधुनिक भारतीय शिक्षणाचे वर्णन खालील द्वारे उत्कृष्ट प्रकारे केले जाऊ शकते

Modern Indian education at the Elementary school level can best be described as being—

موڈیم ابتدائی اسکول کی سطح پر ہندوستانی تعلیم کو بہترین طور پر بیان کیا جا سکتا ہے—

A.अभ्यास-केंद्रीत
A.Curriculum-centred
A.نصاب کی مرکزیت پرمبنی

B.प्रकल्प-केंद्रित
B.Project-centred
B.پراجیکٹ کی مرکزیت پرمبنی

C.विद्यार्थी-केंद्रित
C.Pupil-centred
C.شاگرد کی مرکزیت پرمبنی

D.विषय-केंद्रित
D.Subject-centred
D.موضوع کی مرکزیت پرمبنی

Answer: C.विद्यार्थी-केंद्रित
C.Pupil-centred
C.شاگرد کی مرکزیت پرمبنی

68 समजा एक मूल त्याच्या भावंडांबरोबर आणि कौटुंबिक सदस्यां बरोबर भांडतो. आपण या वाईट सवय पासून त्याला सुटका करण्यासाठी काय करणार?

Suppose a child quarrels with his siblings and family-members. What will you do in order to get rid of him from this bad habit?

فرض کریں کہ ایک بچہ اپنے بھائیوں اور خاندان کے ارکان کے ساتھ جھگڑا کرتا ہے۔ اس بری عادت سے چھٹکارا دلانے کے لئے آپ کیا کریں گے؟

A.अशा वागणुकी साठी आपण शाळेच्या सभा भवनात सार्वजनिक शिक्षा जाहीर करू
A.You will declare public punishment for this act in school assembly
A.آپ اسکول اسمبلی میں اس عمل کے لئے عوامی سزا کا اعلان کریں گے

B.आपण शाळेच्या कोणत्याही भांडणात त्याला पकडण्याचा प्रयत्न कराल जेणेकरून तुम्हाला उघडपणे त्याचा अपमान करण्याची आणि त्याला नाकारण्याचा संधी मिळेल
B.You will try to search the chance to capture him in any school's quarrelling so that you will get an opportunity to dishonour and reject him openly
B.آپ کسی بھی اسکول کے جھگڑے میں اسے پکڑنے کا موقع ڈھونڈنے کی کوشش کریں گے تاکہ آپ اسے کھل کر بے عزت اور مسترد کرنے کا موقع پا سکیں

C.आपण अलगावशी त्याच्याशी बोलू शकता आणि अशा प्रकारचे वर्तन बद्दल तपशील विचारू
C.You will talk to him in isolation and ask in detail about such sort of behavior
C.آپ ان سے الگ تھلگ میں گفتگو کریں گے اور اس طرح کے رویے کے بارے میں تفصیل سے پوچھیں گے

D.आपण आपल्या वर्गातील काही इतर चांगले विद्यार्थी आणि ज्यांचा शाळेला अभिमानी आहे त्यांचीदेऊन उदाहरणे देऊन त्याला कमी लेखू शकता
D.You will demoralise him by giving the examples of some other good students of his class and the school on whom the school feel proud
D.آپ اس کی کلاس کے کچھ دوسرے اچھے طالب علموں اور اس اسکول پر جس پر اسکول فخر محسوس کرتے ہیں اس کی مثال کو دے کر ان کی حوصلہ شکنی کریں گے

Answer: C.आपण अलगावशी त्याच्याशी बोलू शकता आणि अशा प्रकारचे वर्तन बद्दल तपशील विचारू
C.You will talk to him in isolation and ask in detail about such sort of behavior
C.آپ ان سے الگ تھلگ میں گفتگو کریں گے اور اس طرح کے رویے کے بارے میں تفصیل سے پوچھیں گے

69 खालीलपैकी पुल्लिंगी शब्द ओळखा.

A.समीक्षण

B.समीक्षा

C.समीक्षक

D.समिती

Answer: C.समीक्षक

70 दिलेल्या शब्दामधून खालीलपैकी कोणता शब्द तयार केला जाऊ शकतो?
MULTIPLICATION

Which of the following word can be formed from the given word?
MULTIPLICATION

دیےگیے لفظ سے مندرجہ ذیل الفاظ میں سے کونسا بنایا جاسکتا ہے؟
‘MULTIPLICATION’

A.MUTUAL
A.MUTUAL
A.MUTUAL

B.LIMITATION
B.LIMITATION
B.LIMITATION

C.APPLICATION
C.APPLICATION
C.APPLICATION

D.NOTION
D.NOTION
D.NOTION

Answer: B.LIMITATION
B.LIMITATION
B.LIMITATION

71 **सूचना:** दिलेल्या पर्यायांमधून श्रेणी पूर्ण करणारी योग्य आकृती निवडा.

DIRECTIONS: Complete the series by choosing right figure from the given choices.

ہدایات: دیئے گئے اختیارات میں صحیح شکل کا انتخاب کر کے سیریز کو مکمل کیجیئے۔

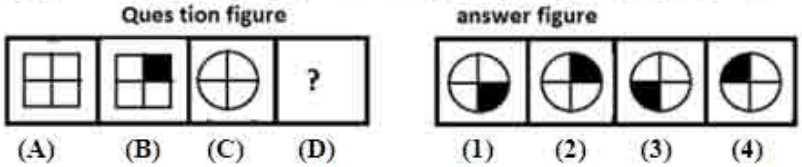

A. 1

B. 2

C. 3

D. 4

Answer: B. 2

72 खालील आकृतीमध्ये किती चौकोन आहेत?

How many quadrilaterals are there in the figure given below?

نیچے دی ہوئی شکل میں کتنے رباعی ہیں؟

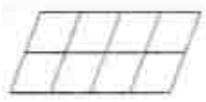

A. 12

B. 20

C. 29

D. 30

Answer: D. 30

73 शिक्षकांच्या समायोजनाची प्राथमिक जबाबदारी आहे –

Primary responsibility for the teacher’s adjustment lies with—-

اساتذہ کی ایڈجسٹمنٹ کے لئے بنیادی ذمہ داری اس میں ہے -

A.मुले
A.The children
A.بچے

B.प्राचार्य
B.The principal
B.پرنسپل

C.शिक्षक स्वत:
C.The teacher himself
C.استاد بذات خود

D.शिक्षकाचे पालक
D.The teacher’s parents
D.استاد کے والدین

Answer: C.शिक्षक स्वत:
C.The teacher himself
C.استاد بذات خود

74 सूचना: खालील दिलेल्या प्रश्नामध्ये काही विधाने आणि काही निष्कर्ष आहेत. सामन्यात: ज्ञात तथ्यांपेक्षा ते वेगळे असतील तर दिलेली विधाने तुम्हाला सत्य मानवी लागतील आणि त्यानंतर दिलेल्या विधानाचे अनुकरण दिलेल्यापैकी कोणता निष्कर्ष तार्किकदृष्ट्या करतो ते ठरवा.

विधाने:
P = U < M < K ≤ I > N
निष्कर्ष :
I. M II. K > N

DIRECTIONS: In the question given below, there are few statements followed by few conclusions. You have to take the given statements to be true even if they seem to be at variance with commonly known facts and then decide which of the given conclusion logically follow(s) from the given statements.

Statements:
P = U < M < K ≤ I > N
Conclusions:
I. M < N
II. K > N

ہدایات: مندرجہ ذیل سوال میں، کچھ بیانات کے بعد کچھ نتائج موجود ہیں. اگر آپ کو عام طور پر جانے جاتے حقائق کے ساتھ بھی متغیر ہونے لگے تو بھی آپ دئے گئے بیانات دماغ میں رکھیں اور پھر اس بات کا فیصلہ کریں کہ ذیل میں دیا گیا کونسا نتیجہ منطقانہ طور پر دیے گئے بیانات کی پیروی کرتا ہے.

بیانات:
P = U < M < K ≤ I > N
نتائج:
M K > N .II

A.तर फक्त I निष्कर्ष खरा आहे
A.If only conclusion I is true
A.اگر صرف I نتیجہ درست ہے

B.तर I व II हे दोन्हीही निष्कर्ष खरे नाहीत
B.If neither conclusion I nor II is true
B.اگر I اور II نتائج میں سے کوئی بھی درست نہیں

C.तर फक्त II निष्कर्ष खरा आहे
C.If only conclusion II is true
C.اگر صرف نتیجہ II درست ہے

D.तर I किंवा II यापैकी एक निष्कर्ष खरा आहे
D.If either conclusion I or II is true
D.اگر I اور II نتائج میں سے ایک درست ہے

Answer: B.तर I व II हे दोन्हीही निष्कर्ष खरे नाहीत
B.If neither conclusion I nor II is true
B.اگرIاور IIنتائج میں سے کوئی بھی درست نہیں

75 ‘ मी आज साखर-काकडी खाल्ली.’ या वाक्यातील विशेषण ओळखा.

A.मी

B.आज

C.साखर

D.काकडी

Answer: C.साखर

76 जर + म्हणजे - ,- म्हणजे x, x म्हणजे ÷ आणि ÷ म्हणजे ,+ तर 15×3÷15+5−2=?

If + means -, - means x, x means ÷ and ÷ means +, then 15×3÷15+5−2=?

15×3÷15+5−2=? تو ،+ مطلب ÷ اور ÷ مطلب x ،x مطلب - ،- مطلب + اگر

A. 0

B. 6

C. 10

D. 2

Answer: C. 10

77 मुलांच्या रांगेत जीवन सुरुवातीपासून सातव्या आणि शेवटून अकराव्या स्थानावर आहे. मुलांच्या दुसऱ्या एका विकास सुरुवातीपासून दहाव्या आणि शेवटून बाराव्या स्थनावर आहे. दोन्ही रांगांमध्ये एकत्रित किती मुले आहेत ?

In a row of boys, Jeevan is seventh from the start and eleventh from the end. In another row of boys, Vikas is tenth-from the start and twelfth from the end. How many boys are there in both the rows together?

لڑکوں کی کتار میں، جیون شرو سے ساتوہ اور آخر سے گیاروہ ہے. لڑکوں کی دوسری کتار میں، وکاس شرو سے دسوا اور آخر سے بھاروہ ہے. دونوں کتاروں میں ملکر کتنے لادکن ہے؟

A.36
A.36
A.36

B.37
B.37
B.37

C.39
C.39
C.39

D.यापैकी नाही
D.None of these
D.ان میں سے کوئی نہیں

Answer: D.यापैकी नाही
D.None of these
D.ان میں سے کوئی نہیں

78 फटकळ प्रभाव म्हणजे:

Blunted effect is

غلط اثر ہے

A.लोकांकर्ता कमी भावना दाखवणे
A.Show less feelings than most people to
A.زیادہ سے زیادہ لوگوں کے مقابلے میں کم احساسات دکھائیں

B.शारीरिक रोगाचे कमी लक्षण
B.Show less symptoms of Physiological disease
B.جسمانی بیماری کے کم علامات دکھائیں

C.(a) आणि (b) दोन्ही
C.Both (a) and (b)
C.ب) اور (ا) دونوں)

D.यापैकी एकही नाही
D.None of these
D.ان میں سے کوئی بھی نہیں

Answer: A.लोकांकर्ता कमी भावना दाखवणे
A.Show less feelings than most people to
A.زیادہ سے زیادہ لوگوں کے مقابلے میں کم احساسات دکھائیں

79

सूचना: दिलेली आकृती सारणी (फिगर मॅट्रीक्स) पूर्ण करण्यासाठी, A, B, C, आणि D या चार पर्यायांपैकी योग्य आकृती निवडा.

DIRECTIONS: Select a suitable figure from the four alternatives that would complete the figure matrix.

ہدایات: دیئے گئے اختیارات میں سے صحیح شکل کو چن کر سلسلہ کو مکمل کیجیئے



A. (A)

B. (B)

C. (C)

D. (D)

Answer: B. (B)

80

9 सप्टेंबर, 2011 रोजी शनिवार आहे, 9 सप्टेंबर 2007 रोजी काय वार असेल?

Saturday falls on 9th Sep, 2011. what was the day 9th Sep. 2007?

ستمبر 2011 کو سنیچر ہے۔ 9 ستمبر 2007 کو کونسا دن ہوگا؟ 9

A.रविवार
A.Sunday
A.اتوار

B.शनिवार
B.Saturday
B.سنیچر

C.सोमवार
C.Monday
C.پیر

D.मंगळवार
D.Tuesday
D.منگل

Answer: C.सोमवार
C.Monday
C.پیر

81 सीमाकडे बोट दाखवून, हरी म्हणतो “ती महेशची आई आहे, जो माझ्या मुलाचा एकुलता मुलगा आहे.” मग सीमाचे हरिशी नाते काय?

Pointing to Seema, Hari says "she is the mother of Mahesh, who is only son of my son. How is Seema related to Hari?

سیما کی طرف اشارہ کرکے، ہری نے کہا،" یے مہیش کی ماں ہے، جو میرے بیٹے کا واحد بیٹا ہے. سیما کا ہری سے کیا رشتہ تھا؟

A.सून
A.Daughter-in-law
A.بہو

B.वडील
B.Father
B.باپ

C.पत्नी
C.Wife
C.بیوی

D.ठरवता येणार नाही
D.Cannot be determined
D.مقرر نہیں ہوتا

Answer: A.सून
A.Daughter-in-law
A.بہو

82 जर चांगल्याप्रकारे पिसलेल्या कार्ड्सच्या पॅकमधून एक कार्ड काढण्यात आले, तर ते काढलेले कार्ड राजाचे असण्याच्या अनुकूल बाबींची संख्या

If a card is drawn from a well shuffled pack of cards, then the number of favourable cases for that card being a king is

اگر ایک کارڈ کو اچھی طرح پلائے گئے پیکٹ سے نکالا جاتا ہے، تو اس کارڈ میں بادشاہ آنے کے سازگار نتائج کی تعداد کیا ہے.

A.4
A.4
A.4

B.6
B.6
B.6

C.13
C.13
C.13

D.16
D.16
D.16

Answer: A.4
A.4
A.4

83 सूचना: दिलेल्या पर्यायांमधून वेगळे ते बाहेर काढा.

DIRECTIONS: Find the odd one out from the given alternatives.

سمت: دیے گئے متبادل میں سے بے جوڑ کو تلاش کرو۔

A.ADBEC
A.ADBEC
A.ADBEC

B.FIGJH
B.FIGJH
B.FIGJH

C.KNLOM
C.KNLOM
C.KNLOM

D.PRTSQ
D.PRTSQ
D.PRTSQ

Answer: D.PRTSQ
D.PRTSQ
D.PRTSQ

84	भारतीय राष्ट्रीय झेंड्याची सर्वात खालची पट्टी The lowest strip of the Indian National Flag is of 5. بھارتی قومی پرچم کی سب سے نیچے کی پٹی ہے
	A.पांढऱ्या रंगाची A.White color A. سفید رنگ
	B.केशरी रंगाची B.Saffron color B. زعفران رنگ
	C.हिरव्या रंगाची C.Green color C. سبز رنگ
	D.लाल रंगाची D.Red color D. لال رنگ
Answer:	C.हिरव्या रंगाची C.Green color C. سبز رنگ
85	‘ आकांडतांडव करणे ‘ या वाक्प्रचाराचा अर्थ काय ?
	A.नको ते उद्योग करणे
	B.धार्मिक कर्मकांड करणे
	C.शिवमंदिरात तांडवनृत्य करणे
	D.रागाने आदळआपट करणे
Answer:	D.रागाने आदळआपट करणे
86	‘शिसारी’ या शब्दाचा विरुद्धार्थी शब्द कोणता ?
	A.तिटकारा
	B.किळस

	C.बेशिस्तपणा
	D.रुची
Answer:	D.रुची
87	पुढील म्हण पूर्ण करा - ‘ कुऱ्हाडीचा --------- गोतास काळ. ‘
	A.घाव
	B.डाव
	C.दांडा
	D.वार
Answer:	C.दांडा

88 सूचना : खालील प्रत्येक प्रश्नात दोन विधाने I आणि II दिलेले आहेत. हे विधान एकतर स्वतंत्र कारण असू शकतात किंवा स्वतंत्र कारणांचे परिणाम असू शकतात. यांपैकी एक विधान इतर विधानाचा परिणाम असू शकतो. दोन्ही विधाने वाचा आणि खालीलपैकी कोणत्या उत्तराचा पर्याय या दोन्ही विधानांमधील संबंधांचे वर्णन करतो ते ठरवा.

विधान :
I. विद्यापीठ प्राधिकरणाने प्रत्येक वर्षी मार्च / एप्रिलमध्ये सर्व सत्रांत परीक्षा घेण्याचे ठरविले आहे जेणेकरुन त्यांना वेळेत निकाल घोषित करता येईल.
II. विद्यापीठामार्फत घेण्यात आलेल्या परीक्षाच्या उत्तरपत्रिका तपासणाऱ्या शिक्षकांच्या कमतरतेमुळे मागील काळात निकाल घोषित करण्यात बराच मोठा विलंब झाला होता.

DIRECTIONS: Below in each question are given two statements I and II. These statements may be either independent causes or may be effects of independent causes. One of these statements may be the effect of the other statement. Read both the statements and decide which of the following answer choice correctly depicts the relationship between these two statements.

Statements:
I. The university authority has decided to conduct all terminal examinations in March/April every year to enable them to declare results in time.
II. There has been considerable delay in declaring results in the past due to shortage of teachers evaluating the answer papers of the examination conducted by the university.

ہدایات: نیچے ہر سوال میں دو بیانات I اور II آزاد وجوہات یا پھر آزاد وجوہات کے اثرات ہو سکتے ہیں۔ انہیں گئے ہیں۔ یہ بیانات یا تو آ بیانات میں سے ایک بیان دوسرے کا اثر ہو سکتا ہے۔دونوں بیانات پڑھیں اور فیصلہ کریں کہ نیچے دیے گئے کس جواب کا انتخاب ان دونوں بیانات کے در میان تعلق کو ٹھیک سے ظاہر کرتا ہے۔

بیانات:
I – یونیورسٹی انتظامیہ نے بروقت نتائج کا اعلان کرتے ہوئے تمام ٹرمینل امتحانات ہر سال مارچ/اپریل میں منعقد کرنے کا فیصلہ کیا ہے۔
II - یونیورسٹی کی طرف سے منعقدکردہ امتحانات کے جوابی پرچے چیک کرنے والے اساتذہ کی کمی کی وجہ سے ماضی میں نتائج کے اعلان میں کافی تاخیر ہوئی ہے۔

A.विधान I कारण आहे आणि विधान II त्याचा परिणाम आहे;
A.Statement I is the cause and statement II is its effect;
A. بیان نمبر I وجہ ہے اور بیان نمبر II اس کا اثر ہے۔

B.विधान II कारण आहे आणि विधान I त्याचा परिणाम आहे;
B.Statement II is the cause and statement I is its effect;
B. بیان نمبر II وجہ ہے اور بیان نمبر I اس کا اثر ہے۔

C.विधान I आणि II दोन्ही स्वतंत्र कारणे आहेत;
C.Both the statements I and II are independent causes;
C. دونوں بیانات نمبر I اور نمبر II آزاد وجوہات ہیں۔

D.विधान I आणि II दोन्ही काही सामान्य कारणांचे परिणाम आहेत
D.Both the statements I and II are effects of independent causes;
D. دونوں بیانات نمبر I اور نمبر II آزاد وجوہات کے اثرات ہیں۔

Answer: D.विधान I आणि II दोन्ही काही सामान्य कारणांचे परिणाम आहेत
D.Both the statements I and II are effects of independent causes;
D.آزاد وجوہات کے اثرات ہیں۔ II اور نمبر I دونوں بیانات نمبر

89 **सूचना:** खालील प्रश्नात असे 3 घटक आहेत ज्यांचा परस्परांशी विशिष्ट संबंध आहे. समान संबंध वर्तुळाच्या संचांनी दर्शविलेला आहे, प्रत्येक वर्तुळ त्याचा आकार कितीही असला तरी, एका घटकाचे प्रतिनिधित्व करते. योग्य वर्तुळाच्या संचांशी खालील घटकांच्या जोड्या लावा.

DIRECTION: The question below has three items having certain relationship among them. The same relationship is expressed by sets of circles, each circle representing one item irrespective of its size. Match the items with right set of circles.

ہدایت:مندرجہ ذیل سوال میں تین آئٹم ہیں جن کے مابین مختلف تعلقات ہیں۔ دائروں کے ایک سیٹ کے ذریعہ یکساں تعلق ظاہر کیا جاتا ہے، ہر دائرہ سائز سے قطع نظر ایک آئٹم کی نمائندگی کرتا ہے۔ آئٹم کو دائروں کے درست سیٹ کے ساتھ ملائیں

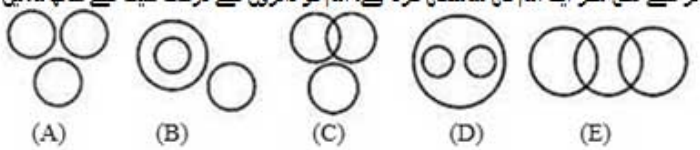

महिला, अभियंता, डॉक्टर
Women, Engineers, Doctors
عورتیں، انجینئر، ڈاکٹر

A. (A)

B. (B)

C. (C)

D. (E)

Answer: D. (E)

90 Out of the given options, choose the most appropriate one to fill in the blank.
Babar _____Rana Sanga at Kanwaha.

A.defeated

B.have defeat

C.have defeated

D.has defeat

Answer: A.defeated

91 सूचना: प्रत्येक प्रश्नाला एक प्रमुख विधानासोबत चार विधाने आहेत ज्यांच्याखाली A, B, C आणि D असे चार विधान आहेत. क्रमवार विधानांची जोडी निवडा ज्यामध्ये प्रथम विधान दुसऱ्या विधानाला सुचवते, आणि दोन्ही विधाने तर्किकदृष्ट्या प्रमुख विधानासोबत निगडित असेल.

ती जेंव्हा कार चालवते, ती रहदारीचे नियम मोडत नाही
A. तिने कार चालवली
B. तिने कार चालवली नाही
C. ती रहदारीचे नियम मोडत नाहीत
D. तिने रहदारीचे नियम नियम मोडले

DIRECTIONS: Each question has a main statement followed by four statements labelled A, B, C and D. Choose the ordered pair of statements, where the first statement implies the second, and the two statements are logically consistent with the main statement.

If she drives car, she does not break traffic rules
A. she drove the car
B. she did not drive car
C. she does not break traffic rules
D. she breaks traffic rules

ہدایت: ہر سوال میں ایک جملہ ہے جسکے بعد چار جملےاے، بی،سی اور ڈی کے نام سے دئے گئے ہیں اسمیں منسلک جوڑیوں کو چنئے۔ جہاں پہلا جملہ دوسرے جملہ کی اور اشارہ کر رہا ہے اور دو جملے منطقی مرکزی بیان کے مطابق ہیں

وہ گاڑی چلائے تو ٹریفک قوانین کی خلاف ورزی نہیں کرتی
Aاس نے گاڑی چلائی ۔
Bاس نے گاڑی نہیں چلائی ۔
Cاس نے ٹریفک قوانین کی خلاف ورزی نہیں کی ۔
Dاس نے ٹریفک قوانین کی خلاف ورزی کی ۔

A.AC
A.AC
A.AC

B.BC
B.BC
B.BC

C.DA
C.DA
C.DA

D.CD
D.CD
D.CD

Answer: A.AC
A.AC
A.AC

92 खालीलपैकी सर्वांत मोठा अपूर्णांक शोधा

Find the largest of the following fractions

مندرجہ ذیل کسور میں سے سب سے بڑی کسر تلاش کریں

A.18/40
A.18/40
A.18/40

B.36/78
B.36/78
B.36/78

C.14/32
C.14/32
C.14/32

D.7/15
D.7/15
D.7/15

Answer: D.7/15
D.7/15
D.7/15

93 **निर्देश**: खालील प्रश्नांमध्ये प्रश्न चिन्हाच्या (?) जागी कोणते अंदाजे मूल्य यायला हवे? (तुम्ही अचूक मूल्य काढण्याचे अपेक्षित नाही).

DIRECTIONS: What approximate value should come in place of the question mark (?) in the following questions? (You are not expected to calculate the exact value)

ہدایات: مندرجہ ذیل سوال میں سوال کا نشان (?) کی جگہ پر کون سا تخمینہ ویلیو آئے گا -
(آپ کو صحیح ویلیو نکالنے کی ضرورت نہیں ہے)

$44\times4\div7+\sqrt{24000}=?$

A. 180

B. 250

C. 260

D. 320

Answer: A. 180

94 **सूचना:** खालील प्रश्नात उत्तरातील पर्यायांपैकी कोणत्या पर्यायी आकृतीत प्रश्नातील आकृती अंतर्भूत आहे?

DIRECTIONS: In the given question find the answer figure in which question figure is embedded.

ہدایات: دیئے گئے سوال میں جواب والی شکل دریافت کیجیئے جس میں سوال والی شکل سرایت کرگئی ہے۔

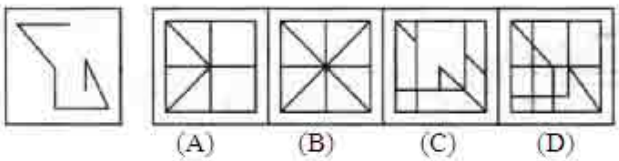

A. (A)

B. (B)

C. (C)

D. (D)

Answer: D. (D)

95 यापैकी कोणती आकृती मिठाई, रसगुल्ला आणि सफरचंद यांच्या दरम्यानचे नाते उत्तमरित्या दर्शवते?

Which of the following diagrams indicates the best relation between Sweets, Rasagulla and Apple ?

مندرجہ ذیل میں سے کون سی ڈایاگرام مٹھائی، رسگلہ اور سیب کے درمیان سب سے بہتر تعلق ہے؟

(A) 

(B) 

(C) 

(D) 

Answer: (A) 

96

सूचना: खालील आकृतीचे प्रतिबिंब शोधून काढा.

DIRECTIONS: Find the mirror image of the figure given below.

ہدایات: نیچے دیئے گئے شکل کی آئینہ معکوس شکل کیا ہوگی۔

मुख्य आकृती
Main Figure
اصل شکل

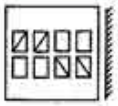

उत्तरासाठी पर्यायी आकृत्या
Answer Figure
جوابی شکل

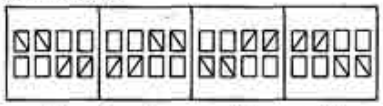

A. (A)

A. (A)

C. (C)

D. (D)

Answer: A. (A)

97 निर्देश: खालीदिलेल्या अक्षराच्या क्रमात काही अक्षरे गहाळ केली आहेत ते त्या क्रमाने खाली दिलेल्या पर्यायांपैकी एक आहे

ab _ da _ bcda _ bb _ d _ a _ bccd

DIRECTIONS: In each of the following letter series, same of the letters are missing which are given in that order as one of the alternatives below it.

ab _ da _ bcda _ bb _ d _ a _ bccd

دایت جیل کے حرف سرج میں کوئی حرف گمشدہ ہے آپکو انکی شناخت جیل کے اختیارات سے کرنی ہے

ab _ da _ bcda _ bb _ d _ a _ bccd

A.aabcba
A.aabcba
A.aabcba

B.cccabb
B.cccabb
B.cccabb

C.cacaab
C.cacaab
C.cacaab

D.cccaab
D.cccaab
D.cccaab

Answer: C.cacaab
C.cacaab
C.cacaab

98 जर $\frac{m}{n}=14, \frac{m+n}{m-n}$ चे मूल्य काढा:

Find the value of $\frac{m+n}{m-n}$, if $\frac{m}{n}=14$:

اگر $\frac{m}{n}=14$ تو $\frac{m+n}{m-n}$ کی قیمت معلوم کریں

A. 28/13

B. 33/13

C. 15/13

D. 17/13

Answer: C. 15/13

99 बहुभुजाच्या आंतर कोनांची बेरीज 1260° आहे. बहुभुजाच्या बाजूंची संख्या काय आहे:

The sum of the interior angles of a polygon is 1260°. The number of sides of the polygon is:

ایک پولیگان کے اندرونی زاویہ کی مجموعہ1260°ہے۔ پولیگان کے زاویوں کی تعداد یہ ہے:

A.6
A.6
A.6

B.7
B.7
B.7

C.8
C.8
C.8

D.9
D.9
D.9

Answer: D.9
D.9
D.9

100 सूचना: प्रत्येक प्रश्नाला एक प्रमुख विधानासोबत चार विधाने आहेत ज्यांच्याखाली A, B, C आणि D असे चार विधान आहेत. क्रमवार विधानांची जोडी निवडा ज्यामध्ये प्रथम विधान दुसऱ्या विधानाला सुचवते, आणि दोन्ही विधाने तर्किकदृष्ट्या प्रमुख विधानासोबत निगडित असेल.

जर नवीन कर प्रणाली राबविली गेली, तर सर्वांसाठी एक कर लागू होईल.
A. नवीन कर प्रणाली लागू करण्यात आली
B. नवीन कर प्रणाली लागू करण्यात आली नाही
C. सर्वांसाठी एक कर लागू होईल
D. सर्वांसाठी विविध कर आहेत.

DIRECTIONS: Each question has a main statement followed by four statements labelled A, B, C and D. Choose the ordered pair of statements, where the first statement implies the second, and the two statements are logically consistent with the main statement.

If new tax system is implemented, there will be one tax for all.
A. new tax system was implemented
B. new tax system was not implemented
C. there will be one tax for all.
D. there are different taxes for all.

ہدایت: ہر سوال میں ایک جملہ ہے جسکے بعد چار جملےاے، بی،سی اور ڈی کے نام سے دئے گئے ہیں اسمیں منسلک جوڑیوں کو چنئے۔ جہاں پہلا جملہ دوسرے جملہ کی اور اشارہ کر رہا ہے اور دو جملے منطقی مرکزی بیان کے مطابق ہیں

اگر نیا ٹیکس سسٹم نافذ کیا گیا تو سب کے لیے ایک طرح کا ٹیکس ہو گا۔
Aنیا ٹیکس سسٹم نافذ کیا گیا ۔
Bنیا ٹیکس سسٹم نافذ نہیں کیا گیا ۔
Cسب کے لیے ایک طرح کا ٹیکس ہو گا ۔
D-سب کے لیے مختلف طرح کے ٹیکس ہوں گے ۔

A.AC
A.AC
A.AC

B.BC
B.BC
B.BC

C.DA
C.DA
C.DA

D.CD
D.CD
D.CD

Answer: A.AC
A.AC
A.AC

101 **सूचना:** दिलेल्या पर्यायांमधून श्रेणी पूर्ण करणारी योग्य आकृती निवडा.

DIRECTIONS: Complete the series by choosing right figure from the given choices.

ہدایات: دیئے گئے اختیارات میں سے صحیح شکل کو چن کر سلسلہ کو مکمل کیجیئے

Problem Figures



Answer Figures

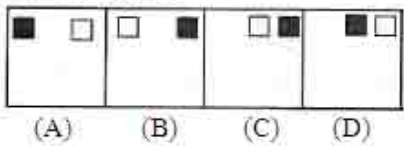

A. (A)

B. (B)

C. (C)

D. (D)

Answer: B. (B)

For More Info And Videos About TAIT-Exam Syllabus And Other Exam Visit My Channel
TAIT च्या 30 प्रश्नपत्रिका PDF
BADSHAHimp Available Request 9765226781
WWW.YouTube.com/BADSHAHimp
Subscribe My Channel

102 खालीलपैकी काय साधन आणि गरज यांच्यातील अचूक नाते प्रदर्शित करते?

Which one of the following demonstrate the correct relationship between drive and need?

مندرجہ ذیل میں سے کونسا محرک اور ضرورت کے درمیان درست تعلق شتہ ظاہر کرتا ہے؟

A.एक दुसर्यांना प्रतिपूरक
A.Compensatory to one-another
A.ایک دوسرے کے لئے معاوضہ

B.सामान गुणधर्म
B.Uniform in nature
B.فطرت میں یکسانیت

C.साधन प्रथम येतो आणि नंतर आवश्यकता
C.Drives comes first and need afterwards
C.مرکات پہلے آتے ہیں اور بعد میں ضرورت ہوتی ہیں

D.दोन्ही एकमेकांच्या समांतर आहेत
D.Both are parallel to one another
D.دونوں ایک دوسرے کے متوازی ہیں

Answer: A.एक दुसर्यांना प्रतिपूरक
A.Compensatory to one-another
A.ایک دوسرے کے لئے معاوضہ

103 **सूचना:** खालील प्रश्नात कागदाच्या एक तुकड्याला (चौकोनी / गोलाकार / त्रिकोणी) घड्या घातल्या आहेत व भोके पाडली आहेत. हा कागद उलगडल्यावर प्रश्नातील आकृतीप्रमाणे दिसतो. उत्तरादाखल पर्यायांमधून अशी आकृती निवडा जी उलगडल्यावर कागदाचे स्वरूप प्रश्नात दाखविल्याप्रमाणे दिसेल.

DIRECTIONS: In the following question a sheet (square circle triangle) of paper is folder and punch is made. When unfolded the paper sheet looks like the question figure. See the answer figures and select the one that follows the manner in which the paper is folded and punch is made.

ہدایات: نیچے دیئے گئے سوال میں، کاغذ کی شیٹ (مثلث، مربع، دائرہ) فولڈ کرکے پنچ لگائی گئی ہے، جب بغیر فولڈ کی ہوئی کاغذ کی شیٹ سوالیہ شکل کی طرح دکھتی ہے، جوابی شکلوں کو دیکھ کر اسکو چنئے جو ایسی لگے کہ، کاغذ شیٹ کو فولڈ کرکے پنچ لگایا گیا ہے۔

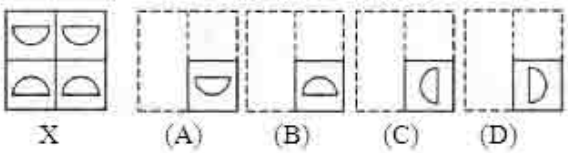

A. (A)

B. (B)

C. (C)

D. (D)

Answer: B. (B)

104 निर्देश: खालील प्रश्न दिलेल्या शब्दांवर आधारित आहेत.

here/ bright/ pride/ stout

प्रत्येक शब्दासमोर W(डब्ल्यू) ठेवल्यास किती अर्थपूर्ण शब्द तयार होतील?

DIRECTIONS: Following question is based on the given words.

here/ bright/ pride/ stout

If 'W' is placed before every word then how many meaningful words will be formed?

ہدایت جیل کے سوال دے ہے لفجونپر مشتمل ہیں

here/ bright/ pride/ stout

-حرف 'W' لگایا جائے تو کتنے مکمل الفاظ تیار ہونگے

A.एक
A.One
A.ایک

B.दोन
B.Two
B.دو

C.तीन
C.Three
C.تین

D.चार
D.Four
D.چار

Answer: A.एक
A.One
A.ایک

For More Info And Videos About TAIT-Exam Syllabus And Other Exam Visit My Channel
TAIT च्या 30 प्रश्नपत्रिका PDF
BADSHAHimp Available Request 9765226781
WWW.YouTube.com/BADSHAHimp
Subscribe My Channel

105 भिन्न वर्तन वैशिष्ट्ये असणाऱ्या मुलांना समान वातावरणात वेगवेगळे अनुभव येतात

Same environment imparts different childhood experiences to children with different behaviortraits

ایک ہی ماحول بچوں کو مختلف بچپن کے تجربات کو مختلف برتاو کی خصوصیات سے بہرہ مند کرتا ہے

A.खरे
A.true
A.صحیح

B.खोटे
B.false
B.غلط

C.निश्चित माहित नाही
C.Not sure
C.پراعتماد نہیں ہے

D.वरीलपैकी कोणतेही नाही
D.None of the above
D.درج بالا میں سے سبھی

Answer: A.खरे
A.true
A.صحیح

106 अझीम प्रेमजी हे _____ चे मालक आहेत

Azim Premji is the owner of –

عظیم پریم جی مالک ہیں :

A.इन्फोसीस
A.Infosys
A.انفوسس کے

B.टीसीएस
B.TCS
B.ٹی سی ایس کے

C.विप्रो
C.Wipro
C.وِپرو کے

D.यांपैकी कोणतेही नाही
D.None of these
D.انمیں سے کوئی نہیں

Answer: C.विप्रो
C.Wipro
C.وِپرو کے

107 बेरीज 24 आणि फरक 4 असलेल्या दोन संख्या काढा. त्यांच्यातील लहान संख्या चिन्हांकीत करा:

Find two numbers whose sum is 28 and difference is 4. Mark the smaller of them:

دو اعداد جن کا مجموعہ 2 ہے اور ان میں 4 کا فرق ہے،چھوٹے کی نشاندہی کریں۔

A.10
A.10
A.10

B.24
B.24
B.24

C.12
C.12
C.12

D.4
D.4
D.4

Answer: C.12
C.12
C.12

108 ____ हे उत्तम कृतिकौशल्याचे उदाहरण आहे

_____ is an example of fine motor skill

_____ بہترین موٹر مہارت کی ایک مثال ہے

A.चढणे
A.Climbing
A.چڑھنا

B.धावणे
B.Running
B.دوڑنا

For More Info And Videos About TAIT-Exam Syllabus And Other Exam Visit My Channel
TAIT च्या 30 प्रश्नपत्रिका PDF
BADSHAHimp Available Request 9765226781
WWW.YouTube.com/BADSHAHimp
Subscribe My Channel

C.झोपणे
C.Sleeping
C.سونا

D.लिहिणे
D.Writing
D.لکھنا

Answer: D.लिहिणे
D.Writing
D.لکھنا

109 A sentence with an underlined idiomatic expression is given. What is the meaning of the idiomatic expression ‘in the blink of an eye’ in the sentence given below?
The high-speed camera reveals how the frog uses its specialized tongue to capture the insect in the blink of an eye.

A.Very quickly

B.Very slowly

C.With an injured eye

D.None of the above

Answer: A.Very quickly

110 अचीवमेंट टेस्ट (कामगिरी ची चाचणी) द्वारे हे मोजले जाते

The Achievement test measures—

کامیابی حاصل کرنے کے اقدامات

A.सामग्रीशी संबंधित ज्ञान
A.The knowledge related to content
A.مواد سے متعلق علم

B.सामग्री मध्ये आवडीचे स्तर
B.The interest level in content
B.مواد میں دلچسپ کی سطح

C.सामग्री मध्ये वाढ
C.The increment in the content
C.مواد میں اضافہ

D.सामग्रीशी संबंधित अधिकार प्राप्त करणे
D.The power acquire with relation to content
D.مواد کے ساتھ متعلقہ طاقت کا حصول

Answer: A.सामग्रीशी संबंधित ज्ञान
A.The knowledge related to content
A.مواد سے متعلق علم

111 सूचना: दिलेल्या पर्यायांमधून वेगळे ते बाहेर काढा.

DIRECTIONS: Find the odd one out from the given alternatives.

سمت: دیے گئے متبادل میں سے بے جوڑ کو تلاش کرو۔

A.गणकयंत्र
A.Calculator
A.کیلکولیٹر

B.कूलर
B.Cooler
B.کولر

C.संगणक
C.Computer
C.کمپیوٹر

D.दूरचित्रवाणी
D.Television
D.ٹیلی ویژن

Answer: A.गणकयंत्र
A.Calculator
A.کیلکولیٹر

112 _____ _____ हे एक उच्च आदेशाचे किंवा आपल्यातील उत्तम विचाराचे सक्रिय बल आहे.

_____ _____ is an active force of the highest order or power of Goodhead within us

_____ ، ہمارے اندر موجود اچھے ذہن(گڈ ہیڈ) کی طاقت یا اعلی ترین درجے کی متحرک طاقت ہے:

A.आक्रमकता, हिंसा
A.Aggression, Violence
A. جارحیت، تشدد

B.निराशा, निरीक्षण
B.Frustration, Observation
B.محرومی، مشاہدہ

C.अहिंसा
C.Non-violence
C.عدم تشدد

D.गैर-निर्भरता
D.Non-dependence
D.عدم انحصار

Answer: C.अहिंसा
C.Non-violence
C.عدم تشدد

113 **सूचना:** खालील प्रश्नात, दिलेल्या पर्यायांमधून नातेसंबंध सांगणारी आकृती निवडा.

DIRECTIONS: In the question below, select the related figure from the given alternatives.

ہدایات: نیچے دیئے گئے سوال میں، دیئے گئے متبادلات میں سے متعلق متبادل چنئے۔

Problem Figures:

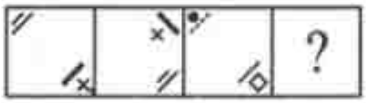

(A) (B) (C) (D)

Answer Figures:

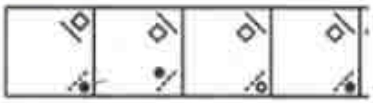

(1) (2) (3) (4)

A. 1

B. 2

C. 3

D. 4

Answer: B. 2

114 $(17)^{17}$ च्या गुणाकारामधील एकक स्थानचा अंक?

The digit in unit's place of the product $(17)^{17}$ is?

حاصل ضرب$(17)^{17}$کے یونٹ پلیس میں ہندسہ ہے؟

For More Info And Videos About TAIT-Exam Syllabus And Other Exam Visit My Channel
TAIT च्या 30 प्रश्नपत्रिका PDF Available Request 9765226781
BADSHAHimp
WWW.YouTube.com/BADSHAHimp
Subscribe My Channel

	A.1 A.1 A.1
	B.3 B.3 B.3
	C.7 C.7 C.7
	D.9 D.9 D.9
Answer:	C.7 C.7 C.7
115	प्रश्नासाठी सूचना: खालील मालिका पूर्ण करा. ABDH, BDHP, CFLX, DHPF, _____ DIRECTION: Complete the following series. ABDH, BDHP, CFLX, DHPF, _____ سوال کے لیے ہدایت:مندرجہ ذیل سیریز کو مکمل کریں۔ ABDH, BDHP, CFLX, DHPF, _____
	A.EKNT A.EKNT A.EKNT
	B.TNCK B.TNCK B.TNCK
	C.EJTN C.EJTN C.EJTN
	D.JNTE D.JNTE D.JNTE

For More Info And Videos About TAIT-Exam Syllabus And Other Exam Visit My Channel
TAIT चा 30 प्रश्नपत्रिका PDF
BADSHAHimp Available Request 9765226781
WWW.YouTube.com/BADSHAHimp
Subscribe My Channel

Answer:	C.EJTN C.EJTN C.EJTN

116	कनिष्ठ वर्गाच्या एका गटामध्ये एखाद्या वरिष्ठ विद्यार्थ्याने कोणत्या क्षमतेने काम करावे? In what capacity a senior student should work in a group of juniors? کس حدتک سینئر طالب علم کو جونیئر طلبہ کے ایک گروپ میں کام کرنا چاہئے؟
	A.मित्र A.A friend A.ایک دوست
	B.आदर्श B.A model B.ایک نمونہ
	C.मार्गदर्शक C.A guide C.ایک گائیڈ
	D.सहकारी D.A colleague D.ایک ساتھی
Answer:	B.आदर्श B.A model B.ایک نمونہ

117 सूचना: अर्थपूर्ण परिच्छेद निर्माण करण्यासाठी, खाली दिलेली (P), (Q) (R), (S) आणि (T) ही पाच वाक्ये योग्य अनुक्रमाने पुनर्रचना करा; त्यांनतर खालील प्रश्नांची उत्तर द्या.

P. आपल्या नैराश्यातून मासा म्हणतो, "मी लहान असल्याने कृपया मला सोडून द्या आणि मी तुमच्या काही कामाचा नाही."
Q. शहाणा कोळी म्हणला," आतापर्यंत जो अस्तित्त्वात नव्हता त्याच्यासाठी माझा निश्चित फायदा मी सोडणार नाही."
R. एके दिवशी, तो फक्त एक छोटासा मासा पकडतो.
S. एकेकाळी एक कोळी होता, मासे पकडण्यावर त्याचा उदरनिर्वाह चालत असे.
T. मला पुन्हा नदीत सोडून दे आणि मी मोठा झाल्यानंतर मला पुन्हा पकड आणि जास्त पैसे कमव.

पुनर्रचना केल्यानंतर खालीलपैकी कोणते वाक्य पाचवे असेल?

DIRECTION: Rearrange the following five sentences (P), (Q), (R), (S) and (T) in the proper sequence to form a meaningful paragraph; then answer the questions given below them.
P. The fish, in its desperation to live, said “Please leave me as I am small and of no use to you.
Q. The wise fisherman replied, “I will not give up a certain profit for one that doesn’t exist yet.”
R. One day, he was able to catch only one small fish.
S. There was once a fisherman whose livelihood depended on his catching of fish.
T. Let me back into the river so that you can catch me again and make more money when I grow bigger.”

Which of the following should be the FIFTH sentence after rearrangement?

ہدایات: ان پانچ جملوں (P)، (Q)، (R)، (S) اور (T) کو با معنی پیرا بنانے کے لئے دوبارہ ترتیب دیجئے، پھر نیچے دے گئے سوالوں کے جواب دیجئے

P. مچھلی نے زندہ رہنے کی چاہت میں کہا "مہربانی کر کے مجھے چھوڈ دو کیوں کہ امن چھوٹی ہوں اور آپکے کسی کام کی نہیں ہوں.
Q. عقل مند مچھوارے نے جواب دیا، "جو ابھی پیدا نہی ہوا میں اسکے بدلے مقرر نفع نہی کھو دونگا.
R. ایک دن، وو خالی ایک چھوٹی مچھلی پکڑنے میں کامیاب ہوا.
S. ایک بار ایک مچھوارہ تھا جسکی روزی مچھلی پکڑنے پر دارمدار تھا.
T. مجھے دریا میں واپس ڈال دو تاکی تم مجھے دوبارہ پکڑو اور زیادہ پینسے بناؤ جب میں بڈی ہو جاؤنگی.

دوبارہ ترییب دینے کے بعد کون سا جملہ پانچوہ ہونا چاہیے؟

A.Q
A.Q
A.Q

B.R
B.R
B.R

C.S
C.S
C.S

D.T
D.T
D.T

Answer: A.Q
A.Q
A.Q

118 एक कुशल शिक्षक ह्याची खात्री करतो

An efficient teacher ensures—

ایک مؤثر استاد یقینی بناتا ہے—

A.त्याच्या विद्यार्थ्यां मधील सहकार्याची भावना
A.Feelings of co-operation in his students
A. اپنے طلبا میں تعاون کا احساس

B.कोणत्याही निर्बंध न करता स्वत: च्या भागावर
B.Full freedom on his own part without any restriction
B. بغیر کسی پابندی کے اپنے طور پر مکمل آزادی

C.त्याच्या विद्यार्थ्यांमधील स्पर्धा
C.Competition among his students
C. اپنے طلبا کے مابین مسابقت

D.परिस्थितीनुसार विद्यार्थ्यां मध्ये सहकार किंवा स्पर्धा ची भावना
D.Feelings of either co-operation or competition as the conditions permit in his students.
D. یا تو تعاون یا مسابقت کے احساسات جیسے اس کے طلبا کے حالات اجازت دیں

Answer: D.परिस्थितीनुसार विद्यार्थ्यां मध्ये सहकार किंवा स्पर्धा ची भावना
D.Feelings of either co-operation or competition as the conditions permit in his students.
D. یا تو تعاون یا مسابقت کے احساسات جیسے اس کے طلبا کے حالات اجازت دیں

119 सूचना: दोन विधाने आणि त्यानंतर दोन निष्कर्ष, I आणि II दिले आहेत. ही विधाने सामान्यतः ज्ञात वस्तुस्थितीपेक्षा भिन्न असली तरी सत्य आहेत असे समजा. दिलेल्यापैकी कोणता निष्कर्ष दिलेल्या विधानांवरुन नक्की काढता येऊ शकतो हे तुम्ही ठरवायचे आहे.तुमचे उत्तर सूचित करा.

विधाने:
काही पुस्तके मासिके आहेत.
काही मासिके कादंबऱ्या आहेत.
निष्कर्ष:
I. काही पुस्तके कादंबऱ्या आहेत.
II. काही कादंबऱ्या मासिके आहेत

DIRECTION: Two statements are given following by two conclusions, I, and II. You have to consider that statements to be true, even if they seem to be at variance from commonly known facts. You are to decide which of the given conclusions can definitely be drawn from the given statements. Indicate your answer.

Statements:
Some books are Magazines.
Some Magazines are Novels.

Conclusion:
I. Some books are Novels.
II. Some Novels are Magazines.

ہدایات: دو سٹیٹمنٹ جوکہ دو خلاصوں پر مشتمل ہیں .I اور II. اپ کو وہ سٹیٹمنٹ درست ماننا ہے، اگرچہ دکہنے میں وہ بہت سارے حقاٰق ست مطبقت رکہتی ہو۔ اپ کو دیے گے خلاصوں میں سے یقینی طور پر اسے اختیار کرنا ہے جو سٹیٹمنٹ سے نکلا ہو. اپنا جواب تلاش کرے..

اظہار بیان:
کچہ کتابیں میگزین ہیں
کچہ میگزین ناول ہیں

نتائج:
I۔ کچہ کتابیں ناول ہیں
II۔کچہ ناول میگزین ہیں

A.केवळ I निष्कर्ष निघेल
A.Only I follows
A.صرف درست ہے I

B.केवळ II निष्कर्ष निघेल
B.Only II follows
B.صرف درست ہے II

C.एकतर I किंवा II निष्कर्ष निघेल
C.Either I or II follows
C.I یا II درست ہے

D.I किंवा II निष्कर्ष निघणार नाही
D.Neither I nor II follows
D.نہ I اور نہی II درست ہے

Answer: B.केवळ II निष्कर्ष निघेल
B.Only II follows
B.صرف II درست ہے

120 सूचना: खालील माहितीचा अभ्यास करुन दिलेल्या प्रश्नांची उत्तरे द्या.
एका आठवड्यात सहा व्याख्याने आयोजित केली जातात आणि ती सोमवारपासून सुरु होऊन रविवारी संपतात. कॉम्पुटर सायन्स मंगळवारी किंवा शनिवारी होत नाही. सायकोलॉजी हे ऑर्गनायजेशनल बिहेव्हीअरच्या तत्काळ नंतर आहे. स्टॅटिस्टिक्स शुक्रवारी नाही आणि स्टॅटिस्टिक्स व रिसर्च मेथड्समध्ये एक दिवसांचे अंतर आहे. अर्थशास्त्रच्या आयोजनाच्या एक दिवस आधी कोणतेही व्याख्यान नाही. (तो दिवशी 'सुट्टीचा' दिवस आहे आणि सोमवार हा सुट्टीचा दिवस नाही)
खालीलपैकी कोणते व्याख्यान अंतिम आयोजित केलेले आहे?

DIRECTIONS: Study the following information to answer the given questions.
Six lectures are scheduled in a week starting from Monday and ending on Sunday of the same week. Computer Science is not on Tuesday or Saturday. Psychology is immediately after Organizational Behaviour. Statistics is not on Friday and there is one day gap between Statistics and Research Methods. One day prior to the schedule of Economics there is not lecture. (as that day is the ‘off’ day and Monday is not the off day)
Which of the following is the last lecture scheduled?

ہدایات: دیے گئے سوالوں کے جواب دینے کے لیے مندرجہ ذیل معلومات کا مطالعہ کریں۔
ایک ہی ہفتہ میں پیر سے شروع ہو کر اور اتوار میں ختم ہونے والے چھ لیکچر شیڈول کیے گئے ہیں۔ کمپیوٹر سائنس منگل یا سنیچر کو نہیں ہے۔ نفسیات فوری طور پر تنظیمی رویے کے بعد ہے۔ شماریات جمعہ کو نہیں ہے اور شماریات اور تحقیقی طریقہ کار کے درمیان ایک دن کا وقفہ ہے۔ اقتصادیات کے شیڈول کے ایک دن پہلے کوئی لیکچر نہیں ہے۔ (کیونکہ وہ دن چھٹی کا دن ہے اور پیر چھٹی کا دن نہیں ہے)
مندرجہ ذیل میں کون سا لیکچر سب سے آخر میں شیڈول کیا گیا ہے؟

A.स्टॅटिस्टिक्स
A.Statistics
A.شماریات

B.रिसर्च मेथड्स
B.Research Methods
B.تحقیقی طریقہ کار

C.मानसशास्त्र
C.Psychology
C.نفسیات

D.यांपैकी कोणतीही नाही
D.None of these
D.ان میں سے کوئی نہیں

Answer: D.यांपैकी कोणतीही नाही
D.None of these
D.ان میں سے کوئی نہیں

121 07:09 ला मिनिट आणि तास काट्यादरम्यान कोणता कोण असेल?

What is the angle between minute and hour hand at 7:09?

7:09 بجے منٹ اور گھنٹہ کی سوئیاں کونسا زاویہ بنائیں گی؟

A.120.5°
A.120.5°
A.120.5°

B.160.5°
B.160.5°
B.160.5°

C.49.5°
C.49.5°
C.49.5°

D.19.5°
D.19.5°
D.19.5°

Answer: B.160.5°
B.160.5°
B.160.5°

122 अगदी सुरुवातीच्या वेड्यांच्या इस्पितळात यांचा समावेश असू शकतो

The earliest asylums may have contained

سب سے قدیم اسائلم شامل ہوسکتا ہے

A.वेश्या
A.Prostitutes
A.طوائف

B.भिकारी
B.Beggars
B.بھکاری

C.मानसिकदृष्ट्या आजारी
C.mentally ill
C.دماغی مریض

D.वरीलपैकी सर्व
D.All of the above
D.درج بالا سبھی

Answer: A.वेश्या
A.Prostitutes
A.طوائف

123

$$\frac{(4 \times 4 \times 4) + (2 \times 2 \times 2)}{(4 \times 4) - (4 \times 2) + (2 \times 2)} = ?$$

A. 1

B. 3

C. 4

D. 6

Answer: D. 6

124 दोन संख्यांचा गुणाकार 4107 आहे. जर या संख्यांचा मसावी 37 असेल, तर मोठी संख्या काढा?

The product of two numbers is 4107. If the H.C.F. of these number is 37, then the greater number is?

دو نمبروں کاحاصل ضرب 4107 ہے۔ اگر ان نمبروں کا ایچ سی ایف 37 ہے، پھر بڑا عدد ہے؟

A.101
A.101
A.101

B.107
B.107
B.107

C.111
C.111
C.111

D.185
D.185
D.185

Answer: C.111
C.111
C.111

125 पुढील जोडशब्द पूर्ण करा . ‘ कोड ----------’

A.कौतुक

B.मारा

C.बार

D.यापैकी सर्व

Answer: A.कौतुक

126 सर्याकडून पृथ्वीवर उष्णता या प्रक्रियेने येते

From the sun, heat comes to earth by the process of

سورج سے _____ کے عمل ذریعہ تپش زمین پر آتی ہے۔

A.रेडिएशन
A.Radiation
A.شعاع ریزی

B.प्रवाह
B.Conduction
B.کنڈکشن

C.संवहन
C.Convection
C.کنوینشن

D.एकही नाही
D.None
D.کوئی نہیں

Answer: A.रेडिएशन
A.Radiation
A.شعاع ریزی

127 सूचना: अर्थपूर्ण परिच्छेद निर्माण करण्यासाठी, खाली दिलेली (P), (Q) (R), (S) आणि (T) ही पाच वाक्ये योग्य अनुक्रमाने पुनर्रचना करा; त्यांनतर खालील प्रश्नांची उत्तर द्या.

P. आपल्या नैराश्यातून मासा म्हणतो, "मी लहान असल्याने कृपया मला सोडून द्या आणि मी तुमच्या काही कामाचा नाही."
Q. शहाणा कोळी म्हणला," आतापर्यंत जो अस्तित्त्वात नव्हता त्याच्यासाठी माझा निश्चित फायदा मी सोडणार नाही."
R. एके दिवशी, तो फक्त एक छोटासा मासा पकडतो.
S. एकेकाळी एक कोळी होता, मासे पकडण्यावर त्याचा उदरनिर्वाह चालत असे.
T. मला पुन्हा नदीत सोडून दे आणि मी मोठा झाल्यानंतर मला पुन्हा पकड आणि जास्त पैसे कमव.

पुनर्रचना केल्यानंतर खालीलपैकी कोणते वाक्य चौथे असेल?

DIRECTION: Rearrange the following five sentences (P), (Q), (R), (S) and (T) in the proper sequence to form a meaningful paragraph; then answer the questions given below them.
P. The fish, in its desperation to live, said “Please leave me as I am small and of no use to you.
Q. The wise fisherman replied, “I will not give up a certain profit for one that doesn’t exist yet.”
R. One day, he was able to catch only one small fish.
S. There was once a fisherman whose livelihood depended on his catching of fish.
T. Let me back into the river so that you can catch me again and make more money when I grow bigger.”

Which of the following should be the FOURTH sentence after rearrangement?

ہدایات: ان پانچ جملوں (P)، (Q)، (R)، (S) اور (T) کو با معنی پیرا بنانے کے لئے دوبارہ ترتیب دیجئے، پھر نیچے دے گئے سوالوں کے جواب دیجئے

P. مچھلی نے زندہ رہنے کی چاہت میں کہا "مہربانی کر کے مجھے چھوڈ دو کیوں کہ امن چھوٹی ہوں اور آپکے کسی کام کی نہیں ہوں.
Q. عقل مند مچھوارے نے جواب دیا، "جو ابھی پیدا نہی ہوا میں اسکے بدلے مقرر نفع نہی کھو دونگا.
R. ایک دن، وو خالی ایک چھوٹی مچھلی پکڑنے میں کامیاب ہوا.
S. ایک بار ایک مچھوارہ تھا جسکی روزی مچھلی پکڑنے پر دارمدار تھا.
T. مجھے دریا میں واپس ڈال دو تاکی تم مجھے دوبارہ پکڑو اور زیادہ پینسے بناؤ جب میں بڈی ہو جاؤنگی.

دوبارہ ترییب دینے کے بعد کون سا جملہ چوتھا ہونا چاہیے؟

A.T
A.T
A.T

B.Q
B.Q
B.Q

C.P
C.P
C.P

D.S
D.S
D.S

Answer: A.T
A.T
A.T

128 भारतीय संसदेमध्ये समाविष्ट आहे:

Indian Parliament consists of:

بھارتی پارلیمان مشتمل ہے:

A.फक्त राज्यसभा
A.Rajya Sabha Only
A. راجیہ سبھا صرف

B.लोकसभा आणि राज्यसभा
B.Lok Sabha and Rajya Sabha
B. لوک سبھا اور راجیہ سبھا

C.लोकसभा राज्यसभा आणि राष्ट्रपती
C.Lok Sabha, Rajya Sabha and President
C. لوک سبھا راجیہ سبھا اور صدر

D.फक्त लोकसभा
D.Lok Sabha only.
D. لوک سبھا صرف.

Answer: C.लोकसभा राज्यसभा आणि राष्ट्रपती
C.Lok Sabha, Rajya Sabha and President
C. لوک سبھا راجیہ سبھا اور صدر

129 Out of the given four words only one is not spelt correctly. Find the word that is not correctly spelt.

A.Concious

B.Valuable

C.Violent

D.Unique

Answer: A.Concious

130 विचारमंथनाच्या पद्धतींचा वारंवार वापर करून शिक्षक हे विकसित करतो

With the frequent use of brain storming methods the teacher develops

دماغ کو جھنجھوڑنے والے طریقہ کار کا کثرت سے استعمال کرتے ہوئے معلم تیار کرتا ہے

A.उत्तम कल्पनाशक्ती
A.good imagination
A.اچھا خیال

B.स्मृती
B.memory
B. یاد داشت

C.बुद्धिमत्ता
C.intelligence
C.ذہانت

D.चांगली सवयी
D.good habits
D.اچھی عادت

Answer: C.बुद्धिमत्ता
C.intelligence
C.ذہانت

131 निर्देश: खालील व्यवस्था काळजीपूर्वक वाचा आणि खाली दिलेल्या प्रश्नांची उत्तरे द्या:

B 5 R 1@E K 4 F 7©DAM 2 P 3%9 H I W 8*6 U J$V Q#

दिलेल्या पर्यायांपैकी कोणते संख्या \अक्षर वर दिलेल्या व्यवस्थेच्या डावी कडून 19 व्या संख्या \अक्षर च्या डाव्या बाजूने 7 वे आहे?

DIRECTIONS: Study the following arrangement carefully and answer the questions given below:

B 5 R 1@E K 4 F 7©DAM 2 P 3%9 H I W 8*6 U J$V Q#

Which of the following is the seventh to the left of the nineteenth from the left end of the above arrangement?

ہدایت نیچے دی گی ترتیب کو پڑھئے اور سہی جواب دیجئے

B 5 R 1@E K 4 F 7©DAM 2 P 3%9 H I W 8*6 U J$V Q#

اپری ترتیب میں الٹے ہاتھ سے اننسوئے حرف کے الٹے ہاتھ کو ساتوا حرف کیا ہوگا ؟

A.P
A.P
A.P

B.K
B.K
B.K

C.6
C.6
C.6

D.D
D.D
D.D

Answer: D.D
D.D
D.D

132 $\sqrt{6.25} \div 0.5 = ?$

A. 5

B. 50

C. 500

D. 2.5

Answer: A. 5

133 सूचना: खालील माहितीचा अभ्यास करुन दिलेल्या प्रश्नांची उत्तरे द्या.
एका आठवड्यात सहा व्याख्याने आयोजित केली जातात आणि ती सोमवारपासून सुरु होऊन रविवारी संपतात. कॉम्पुटर सायन्स मंगळवारी किंवा शनिवारी होत नाही. सायकोलॉजी हे ऑर्गनायजेशनल बिहेव्हीअरच्या तत्काळ नंतर आहे. स्टॅटिस्टिक्स शुक्रवारी नाही आणि स्टॅटिस्टिक्स व रिसर्च मेथड्समध्ये एक दिवसांचे अंतर आहे. अर्थशास्त्रच्या आयोजनाच्या एक दिवस आधी कोणतेही व्याख्यान नाही. (तो दिवशी 'सुट्टीचा' दिवस आहे आणि सोमवार हा सुट्टीचा दिवस नाही)
कॉम्पुटर सायन्स कोणत्या दिवशी आयोजित केले आहे?

DIRECTIONS: Study the following information to answer the given questions.
Six lectures are scheduled in a week starting from Monday and ending on Sunday of the same week. Computer Science is not on Tuesday or Saturday. Psychology is immediately after Organizational Behaviour. Statistics is not on Friday and there is one day gap between Statistics and Research Methods. One day prior to the schedule of Economics there is not lecture. (as that day is the 'off' day and Monday is not the off day)
Which day is computer Science scheduled?

ہدایات: دیے گئے سوالوں کے جواب دینے کے لیے مندرجہ ذیل معلومات کا مطالعہ کریں۔
ایک ہی ہفتہ میں پیر سے شروع ہو کر اور اتوار میں ختم ہونے والے چھ لیکچر شیڈول کیے گئے ہیں۔ کمپیوٹر سائنس منگل یا سنیچر کو نہیں ہے۔ نفسیات فوری طور پر تنظیمی رویے کے بعد ہے۔ شماریات جمعہ کو نہیں ہے اور شماریات اور تحقیقی طریقہ کار کے درمیان ایک دن کا وقفہ ہے۔ اقتصادیات کے شیڈول کے ایک دن پہلے کوئی لیکچر نہیں ہے۔ (کیونکہ وہ دن چھٹی کا دن ہے اور پیر چھٹی کا دن نہیں ہے)
کمپیوٹر سائنس کو کس دن کے لیے شیڈول کیا گیا ہے؟

A.सोमवार
A.Monday
A.پیر

B.बुधवार
B.Wednesday
B.بدھ

C.गुरूवार
C.Thursday
C.جمعرات

D.निर्धारित केले जाऊ शकत नाही.
D.Cannot be determined
D.تعین نہیں کیا جا سکتا ہے

Answer: C.गुरूवार
C.Thursday
C.جمعرات

134 सूचना: खालील माहितीचा अभ्यास करुन दिलेल्या प्रश्नांची उत्तरे द्या.
एका आठवड्यात सहा व्याख्याने आयोजित केली जातात आणि ती सोमवारपासून सुरु होऊन रविवारी संपतात. कॉम्प्युटर सायन्स मंगळवारी किंवा शनिवारी होत नाही. सायकोलॉजी हे ऑर्गनायजेशनल बिहेव्हीअरच्या तत्काळ नंतर आहे. स्टॅटिस्टिक्स शुक्रवारी नाही आणि स्टॅटिस्टिक्स व रिसर्च मेथड्समध्ये एक दिवसांचे अंतर आहे. अर्थशास्त्रच्या आयोजनाच्या एक दिवस आधी कोणतेही व्याख्यान नाही. (तो दिवशी 'सुट्टीचा' दिवस आहे आणि सोमवार हा सुट्टीचा दिवस नाही)
जर बुधवार 'सुट्टीचा दिवस' असेल तर कोड 2 - 4 असेल. जर गुरुवारी 'सुट्टीचा दिवस' असेल तर कोड 3 - 3 असेल.
'सुट्टीचा दिवस' विचारात घेता खालीलपैकी कोणता कोड योग्य आहे?

DIRECTIONS: Study the following information to answer the given questions.
Six lectures are scheduled in a week starting from Monday and ending on Sunday of the same week. Computer Science is not on Tuesday or Saturday. Psychology is immediately after Organizational Behaviour. Statistics is not on Friday and there is one day gap between Statistics and Research Methods. One day prior to the schedule of Economics there is not lecture. (as that day is the ‘off’ day and Monday is not the off day)
If Wednesday is the ‘off day’, the code would be 2 – 4. if Thursday was the ‘off’ day, the code would be 3–3. Taking into account the ‘off’ day which of the following code is correct?

ہدایات: دیے گئے سوالوں کے جواب دینے کے لیے مندرجہ ذیل معلومات کا مطالعہ کریں۔
ایک ہی ہفتہ میں پیر سے شروع ہو کر اور اتوار میں ختم ہونے والے چھ لیکچر شیڈول کیے گئے ہیں۔ کمپیوٹر سائنس منگل یا سنیچر کو نہیں ہے۔ نفسیات فوری طور پر تنظیمی رویے کے بعد ہے۔ شماریات جمعہ کو نہیں ہے اور شماریات اور تحقیقی طریقہ کار کے درمیان ایک دن کا وقفہ ہے۔ اقتصادیات کے شیڈول کے ایک دن پہلے کوئی لیکچر نہیں ہے۔ (کیونکہ وہ دن چھٹی کا دن ہے اور پیر چھٹی کا دن نہیں ہے)
اگر بدھ ’چھٹی کا دن‘ ہے تو کوڈ ہوگا 2 – 4۔ اگر جمعرات ’چھٹی‘ کا دن ہے تو 3–3 کوڈ ہوگا۔ ’چھٹی‘ کے دن کو مد نظر رکھتے ہوئے مندرجہ ذیل میں سے کون سا کوڈ درست ہے؟

A.2–4
A.2–4
A.2–4

B.3–3
B.3–3
B.3–3

C.4–2
C.4–2
C.4–2

D.यांपैकी कोणतीही नाही
D.None of these
D.ان میں سے کوئی نہیں

Answer: D.यांपैकी कोणतीही नाही
D.None of these
D.ان میں سے کوئی نہیں

135 सिद्धुकडे बोट दाखवून, हरिश म्हणतो, “हा माझ्या आईच्या पतीचे वडील आहे.” मग सिद्धुचे हरिशसोबत नाते काय?

Pointing to Sidhu, Harish says "He is the father of my mother’s husband. How is Sidhu related to Harish?

سدھو کی طرف اشارہ کرکے، ہریش نے کہا،" یے میری ماں کے شوہر کا باپ ہے. سدھو کا ہریش سے کیا رشتہ تھا؟

A.वडील
A.Father
A.باپ

B.आजोबा
B.Grandfather
B.دادا

C.मुलगा
C.Son
C.بیٹا

D.जावई
D.Son-in-law
D.داماد

Answer: B.आजोबा
B.Grandfather
B.دادا

136 सकिंग पेपर कागदावर पसरलेली शाई शोषून घेतो कारण—

A Sucking paper absorbs the ink spread on the paper because—

انجذابی کاغذ کس وجہ سے کاغذ پر پھیلی ہوئی روشنائی کو جذب کر لیتا ہے۔

A.शाई उडून जाते
A.Ink evaporate
A.روشنائي بھاپ بن جاتی ہے

B.शाईमध्ये चिकट शक्ती असते
B.Ink contains viscous force
B.روشنائی میں چپچپی فورس ہوتی ہے

C.सकिंग पेपरमध्ये असलेले छिद्र शाई शोषून घेतात
C.Ink absorb the pores present in sucking paper
C.روشنائی اجذابی کاغذ میں موجود مسام کو جذب کرتی ہے

D.सकिंग पेपरमध्ये असलेले छिद्र शाई केशिका क्रियेद्वारे शोषून घेतात
D.Ink is absorbed by the pores present in sucking paper by capillary action
D.کیپلری ایکشن (شعری عمل) کی وجہ سے انجذابی کاغذ میں موجود مسام کے ذریعہ روشنائی جذب کر لی جاتی ہے

Answer: D.सकिंग पेपरमध्ये असलेले छिद्र शाई केशिका क्रियेद्वारे शोषून घेतात
D.Ink is absorbed by the pores present in sucking paper by capillary action
D.کیپلری ایکشن (شعری عمل) کی وجہ سے انجذابی کاغذ میں موجود مسام کے ذریعہ روشنائی جذب کر لی جاتی ہے

137 सूचना: खाली दिलेल्या प्रश्नात एक विधान आहे ज्याचे I आणि II असे दोन निष्कर्ष त्याखाली अंकित केलेले आहेत. या आधारे सर्वात योग्य पर्याय निवडा.

विधान:
एका विशिष्ट शाळेत परीक्षा देणाऱ्या सर्व मुली ती परीक्षा उत्तीर्ण झाल्या. X ही मुलगी त्याच शाळेतून परीक्षेस बसली होती.

निष्कर्ष:
I. X परीक्षा उत्तीर्ण होईल.
II. X परीक्षा उत्तीर्ण होणार नाही.

DIRECTIONS: The question below has a statement followed by two conclusions numbered I and II. Based on this choose the option that is most suitable.

Statement:
In a certain school all the girls appearing for the exams cleared the exam. Xis a girl appearing for exam in the same school.

Conclusions:
I. X will clear the exams.
II. X will not clear the exam.

بیان:
ایک لڑکی ہے جا نے اسی سکول سے امتحان دیا X .ایک مخصوص سکول میں امتحان دینی والی تمام لڑکیوں نے امتحان پاس کر لیا

نتیجے:
I. Xامتحان پاس کر لے گی.
II. Xامتحان پاس نہیں کرے گی.

A.केवळ निष्कर्ष क्रमांक I विधानास अनुसरून आहे
A.Only Conclusion I follows
A.صرف نتیجہ I لاگو ہو گا۔

B.केवळ निष्कर्ष क्रमांक II विधानास अनुसरून आहे
B.Only Conclusions II follows
B.صرف نتیجہ II لاگو ہو گا۔

C.निष्कर्ष क्रमांक I किंवा II अनुसरून आहे
C.Either I or II follows
C. I یا II میں سے ایک لاگو ہو گا۔

D.कोणताही निष्कर्ष अनुसरून नाही
D.Neither I nor II follow
D. I اور II میں سے کوئی بھی لاگو نہیں ہو گا۔

Answer: A.केवळ निष्कर्ष क्रमांक I विधानास अनुसरून आहे
A.Only Conclusion I follows
A.صرف نتیجہ I لاگو ہو گا۔

138 ____ हा विकासात्मक विकार आहे

____ is a developmental disorder

____ ایک ترقیاتی خرابی ہے

A.एडीएचडी
A.ADHD
A.اے ڈی ایچ ڈی

B.डिस्लेक्सिया (वाचन अक्षमता)
B.Dyslexia
B.پڑھنے کی اہلیت میں کمی

C.मतिमंदत्व
C.Mental retardation
C.دماغی خرابی

D.एएसडी
D.ASD
D.اے ایس ڈی

Answer: D.एएसडी
D.ASD
D.اے ایس ڈی

139 Out of the given options, choose the one which is the correct indirect speech of the sentence given below.
Michael said “Alas! I have broken my brother’s watch”.

A.Michael exclaimed sorrowfully that he has broke his brother’s watch.

	B.Michael exclaimed sorrowfully that he have broken his brother’s watch.
	C.Michael exclaimed sorrowfully that he had broken his brother’s watch.
	D.Michael exclaimed sorrowfully that he had broke his brother’s watch.
Answer:	C.Michael exclaimed sorrowfully that he had broken his brother’s watch.

140	सरळ रूप द्या: 7888923 – 6999128 = ? Simplify: 7888923 – 6999128 = ? سادہ بنائیں: 7888923 – 6999128= ?
	A.889785 A.889785 A.889785
	B.889775 B.889775 B.889775
	C.889795 C.889795 C.889795
	D.889765 D.889765 D.889765
Answer:	C.889795 C.889795 C.889795

141	Out of the four alternatives, choose the one which can be substituted for the given words/sentence. One of the two days in the year when day and night are of equal length
	A.Equinox
	B.Curse
	C.Benediction

D.Omen

Answer: A.Equinox

142 दिल्लीला असलेल्या अंतरराष्ट्रीय विमानतळाचे नाव काय आहे?

What is the name of international airport located in Delhi?

دہلی میں واقع بین الاقوامی ہوائی اڈے کا نام کیا ہے؟

A.इंदीरा गांधी अंतरराष्ट्रीय विमानतळ
A.Indira Gandhi International Airport
A. اندرا گاندھی بین الاقوامی ہوائی اڈہ

B.सहारा अंतरराष्ट्रीय विमानतळ
B.Sahara International Airport
B. سہارا انٹرنیشنل ائیرپورٹ

C.नेताजी सुभाषचंद्र बोस अंतरराष्ट्रीय विमानतळ
C.Netaji Subhash Chandra Bose International Airport
C. نیتا جی سبھاش چندر بوس انٹرنیشنل ائیرپورٹ

D.तिरूवंतपूरम अंतरराष्ट्रीय विमानतळ
D.Thiruvananthapuram International Airport
D. تروانتپرم انٹرنیشنل ائیرپورٹ

Answer: A.इंदीरा गांधी अंतरराष्ट्रीय विमानतळ
A.Indira Gandhi International Airport
A. اندرا گاندھی بین الاقوامی ہوائی اڈہ

143 ज्याचा आय क्यु 90 ते 100 च्या श्रेणीमध्ये आहे त्याच्या मानसिक दुर्बलतेची श्रेणी_____ असते.

An IQ in the range of 90 – 100 is _____ range of mental retardation.

90 سے 100کے مابین ایک آئی کیو ، دماغی کمی کی _____ رینج ہے۔

A.सर्वसामान्य
A.Average
A.اوسط

B.मर्यादित
B.Borderline
B.بارڈر لائن (سطحی لائن)

C.सर्वसामान्याच्या खाली
C.Below average
C.متوسط سے کم

D.अतिशय
D.Profound
D.گہری ، عمیق

Answer: A.सर्वसामान्य
A.Average
A.اوسط

144 निर्देश: खालील शब्दांची अर्थपूर्ण/तार्किक क्रमाने मांडणी करा:
1. दमणे
2. रात्र
3. दिवस
4. झोप
5. काम

DIRECTIONS: Arrange the following in the meaningful/logical order:

1. Exhaust
2. Night
3. Day
4. Sleep
5. Work

ہدایات: ایک منطقی/معنی خیز ترتیب میں مندرجہ ذیل کو مرتب کریں:
1.تھکن
2. رات
3. دن
4. نیند
5. کام

A.1, 3, 5, 2, 4
A.1, 3, 5, 2, 4
A.1, 3, 5, 2, 4

B.3, 5, 1, 4, 2
B.3, 5, 1, 4, 2
B.3, 5, 1, 4, 2

C.3, 5, 1, 2, 4
C.3, 5, 1, 2, 4
C.3, 5, 1, 2, 4

D.3, 5, 2, 1, 4
D.3, 5, 2, 1, 4
D.3, 5, 2, 1, 4

Answer: C.3, 5, 1, 2, 4
C.3, 5, 1, 2, 4
C.3, 5, 1, 2, 4

145 सूचना: खालील प्रश्नांमध्ये दिलेल्या पर्यायांमधून संबंधित अक्षर/शब्द/संख्या निवडा.

दिलेला संच (36, 54, 81)

DIRECTIONS: In the following question, select the related letter/word/number from the given alternatives.

Given set : (36, 54, 81)

سمت: مندرجہ ذیل سوال میں، دیے گئے متبادل سے متعلقہ حرف/لفظ/نمبر منتخب کریں۔

(دیا گیا سیٹ: (36, 54, 81

A.(71, 53, 62)
A.(71, 53, 62)
A.(71, 53, 62)

B.(63, 27, 18)
B.(63, 27, 18)
B.(63, 27, 18)

C.(54, 45, 62)
C.(54, 45, 62)
C.(54, 45, 62)

D.(61, 71, 81)
D.(61, 71, 81)
D.(61, 71, 81)

Answer: B.(63, 27, 18)
B.(63, 27, 18)
B.(63, 27, 18)

146 प्रकाशाची गती सर्वप्रथम कोणी मोजली?

Who measured the Speed of Light first?

سب سے پہلے روشنی کی رفتار کی پیمائش کس نے کی؟

A.गॅलिलियो
A.Galileo
A.گلیلیو

B.न्यूटन
B.Newton
B.نیوٹن

C.रोमर
C.Roemer
C.ریومر

D.आइनस्टाइन
D.Einstein
D.انسٹین

Answer: C.रोमर
C.Roemer
C.ریومر

147 आधुनिक शिक्षक हे मान्य करतात की ज्ञान-

Modern educators agreed that knowledge—

جدید تعلیم کاروں نے اس بات پر اتفاق کیا کہ

A.शिक्षणाचे प्राथमिक उद्दीष्ट आहे
A.Is the primary end of education
A.تعلیم کا ابتدائی خاتمہ ہے

B.अधिक महत्वाच्या शैक्षणिक गरजा पूर्ण करण्यासाठी लागणारी पहिली आवश्यक गोष्ट आहे
B.Is simply a pre-requisite to more important educational ends
B.زیادہ اہم تعلیمی اختتام پر صرف ایک ضروری شرط ہے

C.स्वतःच, प्रभावी वागणुकीची वाजवी हमी
C.Is, by itself, a reasonable gurantee of effective behaviour
C.خود کار طریقے سے، مؤثر رویے کی ایک مناسب ضمانت ہے

D.प्राथमिक शाळेत जेथे विद्यार्थी समायोजन वर भर दिले जाते हे बिनमहत्वाचे आहे
D.Is relatively unimportant in grade school where the emphasis should be on pupil adjustment
D.گریڈ اسکول میں نسبتا غیر ضروری ہے، جہاں زور طلبا کی ایڈجسٹمنٹ پر ہونا چاہئے

Answer: B.अधिक महत्वाच्या शैक्षणिक गरजा पूर्ण करण्यासाठी लागणारी पहिली आवश्यक गोष्ट आहे
B.Is simply a pre-requisite to more important educational ends
B.زیادہ اہم تعلیمی اختتام پر صرف ایک ضروری شرط ہے

148 सूचना: दिलेल्या पर्यायांमधून वेगळे ते बाहेर काढा.

DIRECTIONS: Find the odd one out from the given alternatives.

سمت: دیے گئے متبادل میں سے بے جوڑ کو تلاش کرو۔

A.भारतीय
A.Indian
A.بھارتی

B.जपानी
B.Japanian
B.جاپانی

C.अमेरिकेचा
C.American
C.امریکی

D.ब्राझीलचा
D.Brazilian
D.برازیلی

Answer: B.जपानी
B.Japanian
B.جاپانی

149 मुलाच्या भावनिक विकासासाठी निम्न कारक जबाबदार आहेत?

Which of the following factors is responsible for emotional development of the child?

مندرجہ ذیل عوامل میں سے کون سا بچے کی جذباتی ترقی کا ذمہ دار ہے؟

A.परिपक्वता आणि आर्थिक स्थिती
A.Maturity and economic status
A.پختگی اور اقتصادی حیثیت

B.पर्यावरण आणि पर्यावरणशास्त्र
B.Environment and ecology
B.ماحول اور ماحولیاتی

C.परिपक्वता आणि शिकणे
C.Maturity and learning
C.پختگی اور سیکھنا

D.शिक्षण आणि पर्यावरण
D.Learning and environment
D.سیکھنا اور ماحول

Answer: C.परिपक्वता आणि शिकणे
C.Maturity and learning
C.پختگی اور سیکھنا

150 खालीलपैकी कोणती गोष्ट प्रेरक होण्याच्या दृष्टीने योग्य असल्याचे वाटत नाही?

Which of the following fact does not appear to be correct in terms of the motivation?

حوصلہ افزائی کے لحاظ سے مندرجہ ذیل حقائق میں سے کون سا درست نہیں ہوتا؟

A.प्रेरणा ही व्यक्तीची अंतर्गत स्थिती आहे
A.Motivation is the internal state of the individual
A.ترغیب کسی بھی شخص کی اندرونی حالت ہوتی ہے

B.प्रवृत्त क्रियाकलाप हे लक्ष्य देणारे असते
B.The motivated activities are goal oriented
B.حوصلہ افزائی کی سرگرمیاں ، مقاصد پر مبنی ہوتی ہیں

C.लक्ष्य साध्य होईपर्यंत प्रवृत्त वर्तन चालू ठेवले पाहिजे
C.The motivated behaviour is continued till realization of the goal
C.مقصد کے حصول تک حوصلہ افزائی کا سلوک جاری ہے

D.वरीलपैकी काहीही नाही
D.None of the above
D.اوپر سے کوئی بھی نہیں

Answer: D.वरीलपैकी काहीही नाही
D.None of the above
D.اوپر سے کوئی بھی نہیں

151 खालीलपैकी शुद्ध वाक्य कोणते ?

A.ते नेहमी मला सांत्वन करीत असतात.

B.ते नेहमी मला सांत्वन करणार असतात.

	C.ते नेहमी माझी सांत्वन करीत असतात.
	D.ते नेहमी माझे सांत्वन करीत असतात.
Answer:	D.ते नेहमी माझे सांत्वन करीत असतात.

152	सूचना: दिलेल्या पर्यायांमधून वेगळे ते बाहेर काढा. DIRECTIONS: Find the odd one out from the given alternatives. سمت: دیے گئے متبادل میں سے بے جوڑ کو تلاش کرو۔
	A.वृक्ष : रोप A.Tree : Plant A.درخت : پودا
	B.पुरुष : मुलगा B.Man : Boy B.آدمی : لڑکا
	C.काका/मामा : वडील C.Uncle : Father C.چچا : باپ
	D.स्त्री : मुलगी D.Woman : Girl D.عورت : لڑکی
Answer:	C.काका/मामा : वडील C.Uncle : Father C.چچا : باپ

153 सूचना: खालील माहितीचा अभ्यास करुन दिलेल्या प्रश्नांची उत्तरे द्या.
एका आठवड्यात सहा व्याख्याने आयोजित केली जातात आणि ती सोमवारपासून सुरु होऊन रविवारी संपतात. कॉम्पुटर सायन्स मंगळवारी किंवा शनिवारी होत नाही. सायकोलॉजी हे ऑर्गनायजेशनल बिहेव्हीअरच्या तत्काळ नंतर आहे. स्टॅटिस्टिक्स शुक्रवारी नाही आणि स्टॅटिस्टिक्स व रिसर्च मेथड्समध्ये एक दिवसांचे अंतर आहे. अर्थशास्त्रच्या आयोजनाच्या एक दिवस आधी कोणतेही व्याख्यान नाही. (तो दिवशी 'सुट्टीचा' दिवस आहे आणि सोमवार हा सुट्टीचा दिवस नाही)
शुक्रवारी कोणते व्याख्यान आयोजित होणार आहे?

DIRECTIONS: Study the following information to answer the given questions.
Six lectures are scheduled in a week starting from Monday and ending on Sunday of the same week. Computer Science is not on Tuesday or Saturday. Psychology is immediately after Organizational Behaviour. Statistics is not on Friday and there is one day gap between Statistics and Research Methods. One day prior to the schedule of Economics there is not lecture. (as that day is the 'off' day and Monday is not the off day)
Which lecture is scheduled on Friday?

ہدایات: دیے گئے سوالوں کے جواب دینے کے لیے مندرجہ ذیل معلومات کا مطالعہ کریں۔
ایک ہی ہفتہ میں پیر سے شروع ہو کر اور اتوار میں ختم ہونے والے چھ لیکچر شیڈول کیے گئے ہیں۔ کمپیوٹر سائنس منگل یا سنیچر کو نہیں ہے۔ نفسیات فوری طور پر تنظیمی رویے کے بعد ہے۔ شماریات جمعہ کو نہیں ہے اور شماریات اور تحقیقی طریقہ کار کے درمیان ایک دن کا وقفہ ہے۔ اقتصادیات کے شیڈول کے ایک دن پہلے کوئی لیکچر نہیں ہے۔ (کیونکہ وہ دن چھٹی کا دن ہے اور پیر چھٹی کا دن نہیں ہے)
جمعہ کو کس لیچر کا شیڈول ہے؟

A.अर्थशास्त्र
A.Economics
A.اقتصادیات

B.मानसशास्त्र
B.Psychology
B.نفسیات

C.कॉम्पुटर सायन्स
C.Computer Science
C.کمپیوٹر سائنس

D.वरीलपैकी कोणतेही नाही
D.None of the above
D.اوپر میں سے کوئی نہیں

Answer: D.वरीलपैकी कोणतेही नाही
D.None of the above
D.اوپر میں سے کوئی نہیں

154 संशोधनानं द्वारे हे दिसून येत कि शिक्षा ही उपयुक्त आहे-

Research suggests that punishment is useful for—

تحقیق سے پتہ چلتا ہے کہ سزا مفید ہے-

A.अवांछित प्रतिसादांची कायमस्वरूपी माहिती निर्माण करण्यासाठी
A.Producing permanent forgetting of undesirable responses
A.غیر مستحکم ردعمل کو مستقل بھولنا

B.अवांछित प्रतिसाद कमी करण्यासाठी
B.Weakening undesirable responses
B.ناپسندیدہ ردعمل کو کمزور کرنا

C.प्रतिसाद तात्पुरते दाबून ठेवणे जेणेकरून ते दुसऱ्या पर्याय द्वारे बदलले जाऊ शकते
C.Temporarily suppressing a response so that another may be substituted
C.عارضی طور پر ایک جواب کو دبانا تاکہ کسی دوسرے کو متبادل بنایا جا سکے

D.अवांछित प्रतिसाद विलोपन करण्यासाठी आवश्यक असलेल्या चाचणीची संख्या कमी करणे
D.Reducing the number of unreinforced trials necessary to produce extinction
D.ختم ہونے کے لئے ضروری ناقابل ضرورت آزمائشی مقدمات کی تعداد کو کم کرنا

Answer: C.प्रतिसाद तात्पुरते दाबून ठेवणे जेणेकरून ते दुसऱ्या पर्याय द्वारे बदलले जाऊ शकते
C.Temporarily suppressing a response so that another may be substituted
C.عارضی طور پر ایک جواب کو دبانا تاکہ کسی دوسرے کو متبادل بنایا جا سکے

155 82992 ÷ ? = 76×42

82992 ÷ ? = 76×42

82992 ÷ ? = 76×42

A.22
A.22
A.22

B.24
B.24
B.24

C.26
C.26
C.26

D.28
D.28
D.28

Answer: C.26
C.26
C.26

156 चंद्रबाबू नायडू हे _____ चे मुख्य मंत्री आहेत –

Chandrababu Naidu is the Chief Minister of –

چندر بابو نائیڈو وزیر اعلی ہیں :

A.कर्नाटक
A.Karnataka
A.کرناٹک کے

B.आंध्र प्रदेश
B.Andhra Pradesh
B. آندھرا پردیش کے

C.तेलंगणा
C.Telengana
C.تیلنگانہ کے

D.यांपैकी कोणतेही नाही
D.None of these
D.انمیں سے کوئی نہیں

Answer: B.आंध्र प्रदेश
B.Andhra Pradesh
B. آندھرا پردیش کے

157 ‘जागतीक तापमानवाढ’ म्हणजे

‘Global Warming’ means

گلوبل وارمنگ سے مراد ہے

A.पृथ्वीवर हरीतगृह वायूमुळे तापमानामध्ये वाढ
A.Increase in temperature of the Earth due to greenhouse gases
A.گرین ہاؤس گیسوں کی وجہ سے زمین کے درجہ حرارت میں اضافہ

B.समुद्रातली भरती ओहोटी
B.High and low tide in the sea
B.سمندر میں اونچی اور نیچی لہریں

C.घनदाट जंगलातून वातावरणामध्ये वायू उत्सर्जन
C.Emission of gases in atmosphere from dense forest
C.گھنے جنگل سے ماحول میں گیسوں کا اخراج

D.पवन उर्जेमुळे पृथ्वीच्या तापमानामध्ये वाढ
D.Increase in temperature of Earth due to wind energy
D.ہوا کی توانائی کی وجہ سے زمین کے درجہ حرارت میں اضافہ

Answer: A.पृथ्वीवर हरीतगृह वायूमुळे तापमानामध्ये वाढ
A.Increase in temperature of the Earth due to greenhouse gases
A.گرین ہاؤس گیسوں کی وجہ سے زمین کے درجہ حرارت میں اضافہ

158 सूचना: दिलेल्या पर्यायांमधून वेगळे ते बाहेर काढा.

DIRECTIONS: Find the odd one out from the given alternatives.

سمت: دیے گئے متبادل میں سے بے جوڑ کو تلاش کرو۔

A.123
A.123
A.123

B.132
B.132
B.132

C.231
C.231
C.231

D.321
D.321
D.321

Answer: B.132
B.132
B.132

159 Choose the word which is most similar in meaning to the given word.
REMORSE

A.Regret

B.Joy

C.Delight

D.Solace

Answer: A.Regret

160 सूचना: खालील प्रश्नांमध्ये दिलेल्या पर्यायांमधून संबंधित अक्षर समूह निवडा.

AMPG : DOMI :: ? : NKIQ

DIRECTIONS: In the following question, select the related group of letters from the given alternatives.

AMPG : DOMI :: ? : NKIQ

سمت: مندرجہ ذیل سوال میں، دیے گئے متبادل میں سے حروف کا متعلقہ گروپ منتخب کریں۔

AMPG : DOMI :: ? : NKIQ

A.KILO
A.KILO
A.KILO

B.KIOL
B.KIOL
B.KIOL

C.KILM
C.KILM
C.KILM

D.KILN
D.KILN
D.KILN

Answer: A.KILO
A.KILO
A.KILO

161 उदासिनता आणि मामाच्या बाबतीत खालीलपैकी कोणती दोन विधाने बरोबर आहेत?
(i) ते मन:स्थितीचे विकार आहेत
(ii) ते अपरिवर्तनीय आहेत
(iii) ही दीर्घकाळापर्यंत टिकणारे त्रासदायक भावनात्मक स्थिती आहे.
(iv) ते केवळ झाड फुकेनी ठीक केले जाऊ शकते.

State which two statements are correct in relation with depression & mama?
(i) They are mood disorders
(ii) They are irreversible
(iii) They are prolonged maladaptive emotional state.
(iv) They can only be corrected by exorcism.

بتائیں کہ تناؤ اور ماما کے تعلق سے کون سے دو بیانات درست ہیں:
(i): یہ دونوں موڈ کی خرابیاں ہیں
(ii): یہ ناقابل تنسیخ ہیں
(iii): یہ دائمی غیر مطابق جذباتی حالت ہے
(iv): ان کی اصلاح صرف جھاڑ پھونک سے ہی کی جا سکتی ہے

A.(i) & (iv)
A.(i) & (iv)
A.(i) & (iv)

B.(i) & (iii)
B.(i) & (iii)
B.(i) & (iii)

C.(iii) & (iv)
C.(iii) & (iv)
C.(iii) & (iv)

D.(ii) & (iv)
D.(ii) & (iv)
D.(ii) & (iv)

Answer: B.(i) & (iii)
B.(i) & (iii)
B.(i) & (iii)

162 **जर $\sqrt{x} \div \sqrt{21} = \sqrt{21}$ असेल ,तर x चे मूल्य किती असेल:**

If $\sqrt{x} \div \sqrt{21} = \sqrt{21}$, then the value of x is:

اگر $\sqrt{x} \div \sqrt{21} = \sqrt{21}$، تو پھر x کی قدر ہے:

A. 164

B. 264

C. 176

D. 441

Answer: D. 441

163 सूचना: प्रत्येक प्रश्नाला एक प्रमुख विधानासोबत चार विधाने आहेत ज्यांच्याखाली A, B, C आणि D असे चार विधान आहेत. क्रमवार विधानांची जोडी निवडा ज्यामध्ये प्रथम विधान दुसऱ्या विधानाला सुचवते, आणि दोन्ही विधाने तर्किकदृष्ट्या प्रमुख विधानासोबत निगडित असेल.

वामान एकतर उष्ण आहे किंवा वादळी आहे.
A. हवामान उष्ण आहे.
B. हवामान उष्ण नाही.
C. हवामान वादळी आहे.
D. हवामान वादळी नाही

DIRECTIONS: Each question has a main statement followed by four statements labelled A, B, C and D. Choose the ordered pair of statements, where the first statement implies the second, and the two statements are logically consistent with the main statement.

The climate is either hot or stormy
A.The climate is hot
B.The climate is not hot
C.The climate is stormy
D.The climate is not stormy

ہدایت: ہر سوال میں ایک جملہ ہے جسکے بعد چار جملےاے، بی،سی اور ڈی کے نام سے دئے گئے ہیں اسمیں منسلک جوڑیوں کو چنئے۔ جہاں پہلا جملہ دوسرے جملہ کی اور اشارہ کر رہا ہے اور دو جملے منطقی مرکزی بیان کے مطابق ہیں

موسم یا گرم ہے یا طوفانی
Aموسم گرم ہے ۔
Bموسم گرم نہیں ہے ۔
Cموسم طوفانی ہے ۔
Dموسم طوفانی نہیں ہے ۔

A.BD
A.BD
A.BD

B.DA
B.DA
B.DA

C.CB
C.CB
C.CB

D.AB
D.AB
D.AB

Answer: B.DA
B.DA
B.DA

164 खालीलपैकी कोणती आदिश राशी आहे?

Which of the following is a scalar quantity?

مندرجہ ذیل میں سے کون ایک غیر سمتی مقدار ہے؟

A.विद्युत भार
A.Electric Charge
A.الیکٹرک چارج

B.विद्युत क्षेत्र
B.Electric Field
B.برقی میدان

C.गतीवर्धन
C.Acceleration
C.ایکسیلریشن

D.रेखीय गती
D.Linear Momentum
D.لینئر مومینٹم

Answer: A.विद्युत भार
A.Electric Charge
A.الیکٹرک چارج

165 निर्देश: दिलेल्या अंक मालिकेतील चुकीची संज्ञा शोधा:

15, 28, 45, 64, 85, 116, 147

DIRECTIONS: Find the wrong term in the given number series:

15, 28, 45, 64, 85, 116, 147

ہدایت دے گئے نمبرس سرج مے غلط نمبر کھوجے

15, 28, 45, 64, 85, 116, 147

A.85
A.85
A.85

B.28
B.28
B.28

C.64
C.64
C.64

D.116
D.116
D.116

Answer: A.85
A.85
A.85

166 सामाजिक आदेशांचा आदर, आपल्यापेक्षा मोठ्यांसाठी, तरूण आणि गरजूंसाठी वचनबद्धता म्हणजे

Respect for social order, commitment to elders, the young & needy is

سماجی نظام کا احترام اور بزرگوں، نوجوانوں نیز ضرورت مندوں کے تئیں ذمہ دارانہ رویہ _____کہلاتا ہے:

A.बोधात्मक क्षमता
A.Cognitive capacity
A.وجدانی کیفیت

B.भावनात्मक कौशल्य
B.Emotional competence
B.جذباتی استعداد

C.सामाजिक कौशल्य
C.Social competence
C.سماجی استعداد

D.उद्योजक कौशल्य
D.Entrepreneurial competence
D.سرمایہ کارانہ استعداد

Answer: C.सामाजिक कौशल्य
C.Social competence
C.سماجی استعداد

167 दूध आणि पाण्याच्या मिश्रणामध्ये, फक्त 26% पाणी आहे. 7 लिटर शुध्द दूध मिसळल्यानंतर, मिश्रणामधील दूधाची टक्केवारी 76% होते. मिश्रणाचे प्रमाण किती आहे

In a mixture of milk and water, there is only 26% water. After replacing the mixture with 7 liters of pure milk, the percentage of milk in the mixture become 76%. The quantity of mixture is

دودھ اور پانی کے مرکب میں، صرف 26%پانی موجود ہے۔ 7 لیٹر خالص دودھ کے ساتھ مرکب کو تبدیل کرنے کے بعد، مرکب میں دودھ کا فیصدی تناسب 76%بن گیا. مرکب کی مقدارکیا ہے

A.65 लिटर्स
A.65 liters
A.65 لیٹر

B.91 लिटर्स
B.91 liters
B.91 لیٹر

C.38 लिटर्स
C.38 liters
C.38 لیٹر

D.यांपैकी कोणतेही नाही
D.None of these
D. ان میں سے کوئی نہیں

Answer: B.91 लिटर्स
B.91 liters
B.91 لیٹر

168 सूचना: खालील प्रश्नांमध्ये दिलेल्या पर्यायांमधून संबंधित अक्षर/शब्द/संख्या निवडा.

42 : 31 :: ?

DIRECTIONS: In the following question, select the related letter/word/number from the given alternatives.

42 : 31 :: ?

سمت: مندرجہ ذیل سوال میں، دیے گئے متبادل سے متعلقہ حرف/لفظ/نمبر منتخب کریں۔

42 : 31 :: ?

A.97 : 86
A.97 : 86
A.97 : 86

B.53 : 46
B.53 : 46
B.53 : 46

C.79 : 86
C.79 : 86
C.79 : 86

D.64 : 79
D.64 : 79
D.64 : 79

Answer: A.97 : 86
A.97 : 86
A.97 : 86

169 सूचना: अर्थपूर्ण परिच्छेद निर्माण करण्यासाठी, खाली दिलेली (P), (Q) (R), (S) आणि (T) ही पाच वाक्ये योग्य अनुक्रमाने पुनर्रचना करा; त्यांनतर खालील प्रश्नांची उत्तर द्या.

P. आपल्या नैराश्यातून मासा म्हणतो, "मी लहान असल्याने कृपया मला सोडून द्या आणि मी तुमच्या काही कामाचा नाही."
Q. शहाणा कोळी म्हणला," आतापर्यंत जो अस्तित्त्वात नव्हता त्याच्यासाठी माझा निश्चित फायदा मी सोडणार नाही."
R. एके दिवशी, तो फक्त एक छोटासा मासा पकडतो.
S. एकेकाळी एक कोळी होता, मासे पकडण्यावर त्याचा उदरनिर्वाह चालत असे.
T. मला पुन्हा नदीत सोडून दे आणि मी मोठा झाल्यानंतर मला पुन्हा पकड आणि जास्त पैसे कमव.

पुनर्रचना केल्यानंतर खालीलपैकी कोणते वाक्य दुसरे असेल?

DIRECTION: Rearrange the following five sentences (P), (Q), (R), (S) and (T) in the proper sequence to form a meaningful paragraph; then answer the questions given below them.
P. The fish, in its desperation to live, said “Please leave me as I am small and of no use to you.
Q. The wise fisherman replied, “I will not give up a certain profit for one that doesn’t exist yet.”
R. One day, he was able to catch only one small fish.
S. There was once a fisherman whose livelihood depended on his catching of fish.
T. Let me back into the river so that you can catch me again and make more money when I grow bigger.”

Which of the following should be the SECOND sentence after rearrangement?

ہدایات: ان پانچ جملوں (P)، (Q)، (R)، (S) اور (T) کو با معنی پیرا بنانے کے لئے دوبارہ ترتیب دیجئے، پھر نیچے دے گئے سوالوں کے جواب دیجئے

P. مچھلی نے زندہ رہنے کی چاہت میں کہا "مہربانی کر کے مجھے چھوڈ دو کیوں کہ امن چھوٹی ہوں اور آپکے کسی کام کی نہیں ہوں.
Q. عقل مند مچھوارے نے جواب دیا، "جو ابھی پیدا نہی ہوا میں اسکے بدلے مقرر نفع نہی کھو دونگا.
R. ایک دن، وو خالی ایک چھوٹی مچھلی پکڑنے میں کامیاب ہوا.
S. ایک بار ایک مچھوارہ تھا جسکی روزی مچھلی پکڑنے پر دارمدار تھا.
T. مجھے دریا میں واپس ڈال دو تاکی تم مجھے دوبارہ پکڑو اور زیادہ پینسے بناؤ جب میں بڈی ہو جاؤنگی.

دوبارہ ترییب دینے کے بعد کون سا جملہ دوسرا ہونا چاہیے؟

A.R
A.R
A.R

B.P
B.P
B.P

C.T
C.T
C.T

D.S
D.S
D.S

Answer: A.R
A.R
A.R

170 विधान:
एका धर्माशी संबंधित असलेल्या एका मुलीने दुसर्या मुलाच्या एका मुलाशी विवाह करण्याचा निर्णय घेतला.

कृतीचा कोर्स:
I. मुलाच्या कुटुंबावर बहिष्कार टाकावा.
II. मुलगा आणि मुलगी दोघांचा सार्वजनिकरित्या अपमान आणि दंड झाला पाहिजे.

Statement:
A girl belonging to one religion decided to marry a boy belonging to another religion.
Course of actions:
I. The family of the boy should be boycotted.
II. Both boy and girl should be publically humiliated and punished

بیان:
ایک مذہب سے تعلق رکھنے والی لڑکی نے دوسرے مذہب کے لڑکے سے شادی کا فیصلہ کیا۔

لائحہ عمل:
I۔لڑکے کے خاندان کا بائیکاٹ کیا جانا چاہیے
II۔ لڑکے اور لڑکی دونوں کو سرِ عام بے عزت کیا جانا چاہیے اور سزا دی جانی چاہیے۔

A.फक्त I अनुसरून आहे
A.Only I follows
A. صرف I لاگو ہو گا۔

B.फक्त II अनुसरण करते आहे
B.Only II follows
B. صرف II لاگو ہو گا۔

C.एकतर I किंवा II अनुसरून आहे
C.Either I or II follows
C. I یا II میں سے ایک لاگو ہو گا۔

D.I किंवा II दोन्हीपैकी काहीही अनुसरण करत नाही
D.Neither I nor II follows
D. I اور II میں سے کوئی بھی لاگو نہیں ہو گا۔

Answer: D.I किंवा II दोन्हीपैकी काहीही अनुसरण करत नाही
D.Neither I nor II follows
D. I اور II میں سے کوئی بھی لاگو نہیں ہو گا۔

171 सूचना: यांपैकी प्रत्येक प्रश्नामध्ये दोन विधानांनंतर तीन निष्कर्ष I, II आणि III क्रमांकाने दर्शविले आहेत. सामान्यपणे माहीत असलेल्या तथ्यांबरोबर जुळत नसली तरी खालील विधाने सत्य आहेत असे समजा आणि दिलेल्या विधानांवरुन तर्कशास्त्राच्या दृष्टीने दिलेल्या निष्कर्षांपैकी कोणते योग्य आहेत ते ठरवा.
निवेदन:
काही टेबल खुर्च्या आहेत.
काही खुर्ची पलंग आहेत.
निष्कर्ष:
I. काही टेबल पलंग आहेत.
II. कोणताही पलंग टेबल किंवा खुआहेत र्ची नाही.
III. सर्व पलंग खुर्च्या आहेत.

DIRECTION: In each of these questions there are two statements followed by three conclusions numbered I, II and III. You have to take the given statements to be true even if they seem to be at variance from commonly known facts and then decide which of the given conclusion logically follows from the given statements.

Statements:
Some tables are chairs.
Some chairs are beds.

Conclusions:
I. Some tables are beds.
II. No bed is either a chair or a table.
III. All beds are chairs.

ہدایت:ان میں سے ہر ایک سوال میں دو بیانات دیے گئے ہیں جن کے بعد تین نتائج نمبر I، II اور III دیے گئے ہیں۔ آپ کو دیے گئے بیانات کو درست تسلیم کرنا ہے اگرچہ وہ عام طور پر معلوم حقائق کے برعکس نظر آتے ہوں اور پھر فیصلہ کریں کہ کن سے دیے گئے نتائج منطقی طور پر دیے گئے بیانات کی پیروی کرتے ہیں۔

بیانات:
کچھ میزیں کرسی ہیں۔
کچھ کرسیاں بستر ہیں۔

حل:
I. کچھ میز بستر ہیں۔
II. کوئی بستر یا تو کرسی یا میز نہیں ہے۔
III. سبھی بستر کرسیاں ہیں۔

A.खालील पैकी केवळ निष्कर्ष I किंवा II निघत असल्यास.
A.Only either I or II follows
A.صرف یا تو I یا II پیروی کرتا ہے

B.केवळ निष्कर्ष III निघत असल्यास.
B.Only III follows
B.صرف III پیروی کرتا ہے۔

C.केवळ निष्कर्ष II निघत असल्यास.
C.Only II follows
C.صرف II پیروی کرتا ہے

D.कोणतेही निघत नसल्यास.
D.None follows
D.کوئی پیروی نہیں کرتا ہے

Answer: D.कोणतेही निघत नसल्यास.
D.None follows
D.کوئی پیروی نہیں کرتا ہے

172 श्री मिनाक्षी – सुंदरेश्वरा मंदिर हे _____ मध्ये आहे

The Shree Meenakshi – Sundareshwara Temple is in -

میناکشی سندریشوارا مندر ہے :

A.केरळ
A.Kerala
A.کیرالہ میں

B.तामिळ नाडू
B.Tamil Nadu
B.تامل ناڈو میں

C.कर्नाटक
C.Karnataka
C.کرناٹکہ میں

D.यांपैकी कोणतेही नाही
D.None of these
D.انمیں سے کوئی نہیں

Answer: B.तामिळ नाडू
B.Tamil Nadu
B.تامل ناڈو میں

173 सूचना: खालील प्रश्नांमध्ये दिलेल्या पर्यायांमधून संबंधित अक्षर/शब्द/संख्या निवडा.

भाषा : संचार : : वायर : ?

DIRECTIONS: In the following question, select the related letter/word/number from the given alternatives.

Language : Communication : : Wire : ?

سمت: مندرجہ ذیل سوال میں، دیے گئے متبادل سے متعلقہ حرف/لفظ/نمبر منتخب کریں۔

زبان : ترسیل : : تار : ؟

A.टाय
A.Tie
A.باندھنا

B.वीज
B.Electricity
B.بجلی

C.प्रकाश
C.Light
C.روشنی

D.फ्यूज
D.Fuse
D.فیوز

Answer: B.वीज
B.Electricity
B.بجلی

174 भारतामधील पहिली बुलेट-ट्रेन कुठे धावणार आहे

The first bullet – train in India will run from ____

بھارت میں پہلی بلیٹ ٹرین چلیگی :

A.गुजरात ते महाराष्ट्र
A.Gujarat to Maharashtra
A.گجرات سے مہاراشٹرا

B.राजस्थान ते गुजरात
B.Rajasthan to Gujarat
B.راجستھان سے گجرات

C.महाराष्ट्र ते तामिळनाडू
C.Maharashtra to Tamil Nadu
C.مہاراشٹرا سے تامل ناڈو

D.मध्य प्रदेश ते राजस्थान
D.Madhya Pradesh to Rajasthan
D.مدھیہ پردیش سے راجستھان

Answer: A.गुजरात ते महाराष्ट्र
A.Gujarat to Maharashtra
A.گجرات سے مہاراشٹرا

175 माझे वर्तमान वय हे माझ्या मुलाच्या वर्तमान वयापेक्षा 3 पट आहे. 5 वर्षांनंतर माझे वय माझ्या मुलाच्या वयाच्या अडीचपट होईल. माझे वर्तमान वय काय आहे (वर्षांमध्ये)?

My present age is 3 times of my son’s present age. 5 years hence my age will be two and half times of my son’s age. What is my present age (in years)?

میری موجودہ عمر میرے بیٹے کی موجودہ عمر کے 3 گنا ہے۔5 سال بعد اڑھائی گنا ہو جائے گی میر ے بیٹے کی عمر کے۔ میری موجودہ عمر (سالوں میں)کیا ہے؟

A.40
A.40
A.40

B.45
B.45
B.45

C.55
C.55
C.55

D.37
D.37
D.37

Answer: B.45
B.45
B.45

176 लीला एका ठिकाणाहून सुरुवात करुन पूर्वेला 1 किमी चालत जाते आणि मग डावीकडे वळून 2 किमी चालते आणि उजवीकडे वळून पुन्हा 2 किमी चालते. मग पुन्हा तिच्या उजव्या बाजूला 2 किमी चालते, जिथून ती पुन्हा डावीकडे 1 किमी चालते. तर ती सुरुवातीच्या ठिकाणापासून किती दूर आहे?

Leela starts from a point and walks 1 km east and then turns left and walks 2 km and turns right and walks 2 km again. Again she starts walking 2 km towards her right, from where again she walks 1 km left. How far is she from the starting point?

لیلا نے ایک نقطہ سے شروع کیا اور 1 کلومیٹر مشرق کی طرف چلی اور پھر بائیں مڑی اور 2 کلومیٹر تک چلی اور دائیں مڑی اور پھر 2 کلومیٹر چلی۔ اس نے پھر اپنے دائیں طرف 2 کلومیٹر چلنا شروع کیا، جہاں سے دوبارہ وہ بائیں طرف 1 کلومیٹر چلی۔ شروعاتی نقطہ سے وہ کتنی دور ہے؟

A.3 किमी
A.3 km.
A.3 کلومیٹر۔

B.4 किमी
B.4 km.
B.4 کلومیٹر۔

C.5 किमी
C.5 km.
C.5 کلومیٹر۔

D.2 किमी
D.2 km.
D.2 کلومیٹر۔

Answer: B.4 किमी
B.4 km.
B.4 کلومیٹر۔

177 सूचना: खालील प्रत्येक प्रश्नात, तीन विधाने दिली आहेत, ज्यांच्यानंतर चार निष्कर्ष आहेत ज्यांना I, II, III आणि IVअसे अंकित केले आहे. सर्वसामान्यपणे ज्ञात असलेल्या तथ्यांशी विसंगती असली तरीही, हे सत्य असल्याचे तात्पुरते मानून, सामान्यतः ज्ञात असलेल्या तथ्यांकडे दुर्लक्ष करून, दिलेल्या निष्कर्षांपैकी कोणती तर्कशुद्धपणे विधानांचे अनुसरण करतात ते ठरवा.
विधाने :
काही उत्तर पूर्व असतात.
कोणतीही पूर्व पश्चिम नसते.
सर्व पश्चिम दक्षिण असतात
निष्कर्ष:
I. कोणतीही उत्तर पश्चिम नसते.
II. काही पूर्व पश्चिम असतात.
III. काही दक्षिण पूर्व नसतात.
IV. सर्व दक्षिण पूर्व असतात

DIRECTION: In each of the following questions, three statements followed by four conclusions marked I, II, III and IV are given. Consider the statements to be true, even though they seem to be at variance with the commonly known facts and find out which of the given conclusion(s) logically fallow(s) the statements, disregarding the commonly known facts.

Statements:
Some north are east.
No east is west.
All west are south.

Conclusions:
I. No north is west.
II. Some east are west.
III. Some south are not east
IV. All south are east.

ہدایت: مندرجہ ذیل ہر ایک سوال میں، تین بیانات دیے گئے ہیں جن کے بعد چار نتائج دیے گئے ہیں جنھیں I، II، III اور IV سے نشان زد کیا گیا ہے۔ بیانات کے درست ہونے پر غور کریں، اگرچہ وہ عام طور پر معلوم حقائق کے برعکس نظر آتے ہوں اور تلاش کریں کہ کون سے دیے گئے نتائج منطقی طور پر بیانات کی پیروی کرتے ہیں، عام طور پر معلوم حقائق سے قطع نظر۔

بیانات:
کچھ شمال مشرق ہیں۔
کوئی مشرق مغرب نہیں ہے۔
سبھی مغرب جنوب ہیں۔

حل:
I. کوئی شمال مغرب نہیں ہے۔
II. کچھ مشرق مغرب ہیں۔
III. کچھ جنوب مشرق نہیں ہیں۔
IV. سبھی جنوب مشرق ہیں۔

A.केवळ निष्कर्ष I निघत असल्यास.
A.Only I follows
A.صرف I پیروی کرتا ہے

B.केवळ निष्कर्ष II निघत असल्यास.
B.Only II follows
B.صرف II پیروی کرتا ہے

C.केवळ निष्कर्ष III निघत असल्यास.
C.Only III follows
C.صرف III پیروی کرتا ہے

D.एकतर निष्कर्ष III किंवा IV निघत असल्यास.
D.Either III or IV follows
D.یا تو III یا IV پیروی کرتے ہیں

Answer: C.केवळ निष्कर्ष III निघत असल्यास.
C.Only III follows
C.صرف III پیروی کرتا ہے

178 सूचना: खालील माहितीचा अभ्यास करुन दिलेल्या प्रश्नांची उत्तरे द्या.
एका आठवड्यात सहा व्याख्याने आयोजित केली जातात आणि ती सोमवारपासून सुरु होऊन रविवारी संपतात. कॉम्पुटर सायन्स मंगळवारी किंवा शनिवारी होत नाही. सायकोलॉजी हे ऑर्गनायजेशनल बिहेव्हीअरच्या तत्काळ नंतर आहे. स्टॅटिस्टिक्स शुक्रवारी नाही आणि स्टॅटिस्टिक्स व रिसर्च मेथड्समध्ये एक दिवसांचे अंतर आहे. अर्थशास्त्रच्या आयोजनाच्या एक दिवस आधी कोणतेही व्याख्यान नाही. (तो दिवशी 'सुट्टीचा' दिवस आहे आणि सोमवार हा सुट्टीचा दिवस नाही)
अर्थशास्त्र आणि सायकोलॉजीच्या दरम्यान किती व्याख्याने आयोजित केली गेली आहेत?

DIRECTIONS: Study the following information to answer the given questions.
Six lectures are scheduled in a week starting from Monday and ending on Sunday of the same week. Computer Science is not on Tuesday or Saturday. Psychology is immediately after Organizational Behaviour. Statistics is not on Friday and there is one day gap between Statistics and Research Methods. One day prior to the schedule of Economics there is not lecture. (as that day is the ‘off’ day and Monday is not the off day)
How many lectures were scheduled between Economics and Psychology?

ہدایات: دیے گئے سوالوں کے جواب دینے کے لیے مندرجہ ذیل معلومات کا مطالعہ کریں۔
ایک ہی ہفتہ میں پیر سے شروع ہو کر اور اتوار میں ختم ہونے والے چھ لیکچر شیڈول کیے گئے ہیں۔ کمپیوٹر سائنس منگل یا سنیچر کو نہیں ہے۔ نفسیات فوری طور پر تنظیمی رویے کے بعد ہے۔ شماریات جمعہ کو نہیں ہے اور شماریات اور تحقیقی طریقہ کار کے درمیان ایک دن کا وقفہ ہے۔ اقتصادیات کے شیڈول کے ایک دن پہلے کوئی لیکچر نہیں ہے۔ (کیونکہ وہ دن چھٹی کا دن ہے اور پیر چھٹی کا دن نہیں ہے)
اقتصادیات اور نفسیات کے درمیان کتنے لیکچر شیڈول کیے گئے تھے؟

A.एक
A.One
A.ایک

B.दोन
B.Two
B.دو

C.तीन
C.Three
C.تین

D.निर्धारित केले जाऊ शकत नाही.
D.Cannot be determined
D.تعین نہیں کیا جا سکتا ہے

Answer: C.तीन
C.Three
C.تین

179 सूचना: प्रत्येक प्रश्नाला एक प्रमुख विधानासोबत चार विधाने आहेत ज्यांच्याखाली A, B, C आणि D असे चार विधान आहेत. क्रमवार विधानांची जोडी निवडा ज्यामध्ये प्रथम विधान दुसऱ्या विधानाला सुचवते, आणि दोन्ही विधाने तर्किकदृष्ट्या प्रमुख विधानासोबत निगडित असेल.

बिल एकतर देय आहे किंवा दिलेले आहे.
A. बिल देय आहे.
B. बिल देय नाही.
C. बिल दिलेले आहे.
D. बिल दिलेले नाही.

DIRECTIONS: Each question has a main statement followed by four statements labelled A, B, C and D. Choose the ordered pair of statements, where the first statement implies the second, and the two statements are logically consistent with the main statement.

The bill is either due or paid
A.The bill is due
B.The bill is not due
C.The bill is paid
D.The bill is not paid

ہدایت: ہر سوال میں ایک جملہ ہے جسکے بعد چار جملےاے، بی،سی اور ڈی کے نام سے دئے گئے ہیں اسمیں منسلک جوڑیوں کو چنئے۔ جہاں پہلا جملہ دوسرے جملہ کی اور اشارہ کر رہا ہے اور دو جملے منطقی مرکزی بیان کے مطابق ہیں

بل یا واجب الادا ہے یا ادا شدہ
A۔ بل واجب الادا ہے
B۔ بل واجب الادا نہیں ہے
C۔ بل اداشدہ ہے
D۔ بل اداشدہ نہیں ہے

A.BD
A.BD
A.BD

B.DA
B.DA
B.DA

C.CB
C.CB
C.CB

D.AB
D.AB
D.AB

Answer: B.DA
B.DA
B.DA

180 बहुतांश लोकांच्या सर्वात जुन्या आठवणी या वयाच्या आधीच्या नसतात

Most people’s earliest memories do not predate of age

اکثروبیشتر کی ابتدائی یادیں اس عمر سے پہلے کی نہیں ہوتی

A.6 महिने
A.6 month
A.6 مہینہ

B.1 वर्ष
B.1 years
B.1 سال

C.2 वर्षे
C.2 years
C.2 سال

D.3 वर्षे
D.3 years
D.3 سال

Answer: D.3 वर्षे
D.3 years
D.3 سال

181 **सूचना:** दिलेल्या चारांपैकी वेगळी (असंबद्ध) असणारी आकृती शोधून काढा.

DIRECTIONS: Find the odd figure from the given four figures.

ہدایات: دیئے گئے چار شکلوں میں سے طاق شکل کونسی ہے؟

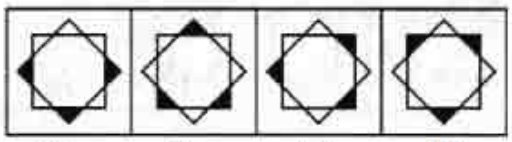

(A) (B) (C) (D)

A. (A)

B. (B)

C. (C)

D. (D)

Answer: A. (A)

182 ' उमेश ' या शब्दाची संधी सोडवा.

A.उ + मेश

B.उ + मेष

C.उमा + एश

D.उमा + ईश

Answer: D.उमा + ईश

183 24 एप्रिल 2011 ते 13 ऑगस्ट 2011 मधील दिवसांची संख्या काय आहे?

Find the number of Days from 24 April 2011 to 13 August 2011?

24 اپریل 2011 سے 13 اگست 2011 تک دنوں کی تعداد معلوم کریں؟

A.111 दिवस
A.111 Days
A.111دن

B.113 दिवस
B.113 Days
B.113دن

C.115 दिवस
C.115 Days
C.115دن

D.112 दिवस
D.112 Days
D.112دن

Answer: D.112 दिवस
D.112 Days
D.112دن

184 “ॲन एरा ऑफ डार्कनेस” चे लेखक कोण आहेत

“An Era of Darkenss” has been authored by -

: این اِرا آف ڈارکینس" لکھی ہے

A.प्रणब मुखर्जी
A.Pranab Mukherjee
A.پرنب مکھرجی نی

B.शशी थरूर
B.Shashi Tharoor
B.ششی تھرور نی

C.नटवर सिंह
C.Natwar Singh
C.نٹور سنگھ نی

D.यांपैकी कोणतेही नाही
D.None of these
D.انمیں سے کوئی نہیں

Answer: B.शशी थरूर
B.Shashi Tharoor
B.ششی تھرور نی

185 Out of the given options which best expresses the meaning of the given Proverb?
Don’t cross the bridge until you come to it.

A.You should deal with a problem or situation only when it arises

B.You should start planning and deciding a thing long before it actually arises

C.It is not safe to cross a bridge when it is flooded with water

D.If you see any bridge while travelling you should discard that route

Answer: A.You should deal with a problem or situation only when it arises

186 $(5)^{16} \times (25)^4 = (5)^?$

$(5)^{16} \times (25)^4 = (5)^?$

$(5)^{16} \times (25)^4 = (5)^?$

A.14
A.14
A.14

B.24
B.24
B.24

C.42
C.42
C.42

D.16
D.16
D.16

Answer: B.24
B.24
B.24

187 **सूचना:** खालील प्रश्नात उत्तरातील पर्यायांपैकी कोणत्या पर्यायी आकृतीत प्रश्नातील आकृती अंतर्भूत आहे?

DIRECTIONS: In the given question find the answer figure in which question figure is embedded.

ہدایات: دیئے گئے سوال میں، جواب کی شکل کو دریافت کیجیئے جو سوال میں سرایت کر گئی ہے۔

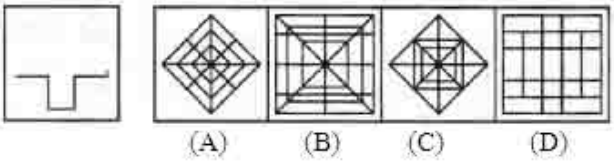

A. (A)

B. (B)

C. (C)

D. (D)

Answer: D. (D)

188 0.18%चे अपूर्णांकात रुपांतर करा.

Convert 0.18% into fraction?

0.18%کو حصہ میں تبدیل کریں.

A.7/5000
A.7/5000
A.7/5000

B.8/5000
B.8/5000
B.8/5000

C.9/5000
C.9/5000
C.9/5000

D.11/5000
D.11/5000
D.11/5000

Answer: C.9/5000
C.9/5000
C.9/5000

189 मनोवृत्तीच्या दोन पायरीच्या संकल्पनेत, दोन पायऱ्या आहेत

In two step concept of attitude, the two steps are

کے تصور میں ، دوقدم سے_____ مراد ہے۔ (two step)’دو قدم رویّے‘

For More Info And Videos About TAIT-Exam Syllabus And Other Exam Visit My Channel
TAIT च्या 30 प्रश्नपत्रिका PDF
BADSHAHimp Available Request 9765226781
WWW.YouTube.com/BADSHAHimp
Subscribe My Channel

A.ध्येय आणि निकाल
A.Target and result
A.ہدف اور نتیجہ

B.ध्येय आणि स्त्रोत
B.Target and source
B.ہدف اور مصدر

C.ध्येय आणि ओळख
C.Target and identification
C.ہدف اور شناخت

D.स्त्रोत आणि ओळख
D.Source and identification
D.مصدر اور شناخت

Answer:
C.ध्येय आणि ओळख
C.Target and identification
C.ہدف اور شناخت

190 संगनकावरील माहिती काय म्हणून साठवली जाते?

Information on a computer is stored as what?

ایک کمپیوٹر میں موجود معلومات کس شکل میں اسٹور ہوتی ہیں؟

A.ॲनालॉग डेटा
A.Analog data
A.انالاگ ڈیٹا

B.डिजिटल डेटा
B.Digital data
B.ڈیجٹل ڈیٹا

C.मोडेम डेटा
C.Modem data
C.موڈم ڈیٹا

D.वॅट्स डेटा
D.Watts data
D.واٹس ڈیٹا

Answer:
B.डिजिटल डेटा
B.Digital data
B.ڈیجٹل ڈیٹا

For More Info And Videos About TAIT-Exam Syllabus And Other Exam Visit My Channel
TAIT च्या 30 प्रश्नपत्रिका PDF
BADSHAHimp Available Request 9765226781
WWW.YouTube.com/BADSHAHimp
Subscribe My Channel

191	DIRECTIONS: A sentence with an underlined word is given below. Find the word which is opposite in meaning to the underlined word from the given options. He was released after 865 days in captivity.
	A.Freedom
	B.Imprisonment
	C.Confinement
	D.Arrest
Answer:	A.Freedom

192	Out of the given four words only one is spelt correctly. Find the word that is correctly spelt.
	A.Dilemma
	B.Arguement
	C.Humourouss
	D.Honouraryi
Answer:	A.Dilemma

193	सूचना: खाली दिलेल्या विधान (A) आणि कारण (R) साठी, खालील पैकी योग्य पर्याय निवडा: विधान (A): ब्रिटिश साम्राज्याने भारतात ख्रिस्तीपणाची स्थापना केली. कारण (R): ब्रिटीश साम्राज्याने धार्मिक वर्चस्वाची धोरणे पसंत केली. DIRECTION: For the Assertion (A) and Reason (R) given below, choose the correct alternative from the following: Assertion (A): Christianity was established in India by British Empire. Reason (R): British Empire favoured the policy of religious supremacy. ہدایت: نیچے دئیے گئے اسرشن (A) اور (R) وجہ کے لئے، مندرجہ ذیل میں سے صحیح متبادل منتخب کریں: اسرشن (A): ہندوستان میں برطانوی سلطنت کے ذریعہ عیسائیت قائم کی گئی تھی۔ وجہ (R): برطانوی سلطنت مذہبی عظمت کی پالیسی کی حمایت کرتی تھی۔

For More Info And Videos About TAIT-Exam Syllabus And Other Exam Visit My Channel
TAIT च्या 30 प्रश्नपत्रिका PDF Available Request 9765226781
WWW.YouTube.com/BADSHAHimp Subscribe My Channel
BADSHAHimp

A.दोन्ही (A) आणि (R) सत्य आहेत आणि (R) (A) च योग्य स्पष्टीकरण आहे
A.Both (A) and (R) are true and (R) is the correct explanation of (A)
A. (A) اور (R) دونوں صحیح ہیں اور (R) (A) کی درست وضاحت ہے

B.दोन्ही (A) आणि (R) खरे आहेत, परंतु (R) (A) च योग्य स्पष्टीकरण नाही
B.Both (A) and CR) are true, but (R) is not the correct explanation of (A)
B. (A) اور CR) دونوں صحیح ہیں، لیکن (R) (A) کی درست وضاحت نہیں ہے

C.(A) सत्य आहे, परंतु (R) खोटे आहे
C.(A) is true, but (R) is false
C. (A) صحیح ہے، لیکن (R) غلط ہے

D.(A) खोटे आहे, परंतु (R) सत्य आहे
D.(A) is false, but (R) is true
D. (A) غلط ہے، لیکن (R) صحیح ہے

Answer: D.(A) खोटे आहे, परंतु (R) सत्य आहे
D.(A) is false, but (R) is true
D. (A) غلط ہے، لیکن (R) صحیح ہے

194 एक दुकानदार त्याच्या वस्तू खरेदी किमतीला विकतो, पण तो एक किलो वजनासाठी 875 ग्रॅमचे वजन वापरतो. त्याच्या नफ्याची टक्केवारी काढा.

A shopkeeper sells his goods at cost price, but uses a weight of 875 g for the kg weight. Find his gain percentage.

ایک دوکاندار اپنے سامان کو لاگت قیمت پر فروخت کرتا ہے، لیکن ایک کلو وزن کے لئے 875 گرام وزن کا استعمال کرتا ہے. اس کا فائدہ تلاش کریں

(A) $14\frac{2}{7}\%$

(B) $12\frac{1}{2}\%$

(C) $14\frac{3}{7}\%$

(D) $12\frac{2}{3}\%$

Answer: (A) $14\frac{2}{7}\%$

For More Info And Videos About TAIT-Exam Syllabus And Other Exam Visit My Channel
TAIT च्या 30 प्रश्नपत्रिका PDF
BADSHAHimp Available Request 9765226781
WWW.YouTube.com/BADSHAHimp
Subscribe My Channel

195 पृथ्वीवर कोणता पक्षी सर्वात जास्त जगतो?

Which is the largest living bird on Earth?

زمین پر سب سے بڑا جاندار پرندہ کون ہے؟

A.इमू
A.Emu
A.ایمو

B.शहामृग
B.Ostrich
B.اوسٹ ریچ

C.अल्बाट्रॉस
C.Albatross
C.البتروس

D.सायबेरियन क्रेन
D.Siberian crane
D.سائبیرین کرین

Answer:
B.शहामृग
B.Ostrich
B.اوسٹ ریچ

196 जहांगीरचा उत्तराधिकारी कोण होता?

Who- was the successor of Jehangir?

جہانگیر کےجانشین ہیں :

A.शाह जहान
A.Shah Jahan
A.شاہ جہان

B.औरंगजेब
B.Aurangazeb
B.اورنگ زیب

C.हुमायुन
C.Humayun
C.ہمایوں

D.अकबर
D.Akbar
D.اکبر

For More Info And Videos About TAIT-Exam Syllabus And Other Exam Visit My Channel
TAIT च्या 30 प्रश्नपत्रिका PDF Available Request 9765226781
BADSHAHimp
WWW.YouTube.com/BADSHAHimp
Subscribe My Channel

Answer:

A.शाह जहान
A.Shah Jahan
A.شاہ جہان

197

सूचना: खालील प्रश्नात एक उघडलेला फासा दाखविला आहे. उत्तराच्या पर्यायांपैकी कोणता पर्याय S या चिन्हाच्या विरुद्ध बाजूला येईल?

DIRECTIONS: In the following question an unfolded dice is given. From the given alternatives which of the following will be opposite of S?

ہدایات: نیچے کے سوال میں ایک بغیر فولڈ کیا ہوا پاسہ دیا گیا ہے۔ دیئے گئے متبادلات میں سے کونسا نیچے والی شکل S ہوگا

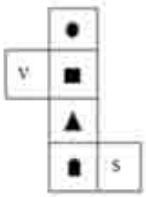

(A) ■

(B) ▲

(C) V

(D) ●

Answer:

(C) V

198

एक हजार बाइट्स म्हणजे आहे …….

One thousand bytes is a …….

ایک ہزار بائٹ ایک ----- ہے۔

A.किलोबाईट
A.Kilobyte
A.کیلو بائٹ

B.मेघाबाईट
B.Megabyte
B.میگابائٹ

For More Info And Videos About TAIT-Exam Syllabus And Other Exam Visit My Channel
TAIT च्या 30 प्रश्नपत्रिका PDF
BADSHAHimp Available Request 9765226781
YouTube WWW.YouTube.com/BADSHAHimp
Subscribe My Channel

C.गिगाबाईट
C.Gigabyte
C.گیگابائٹ

D.टेराबाईट
D.Terabyte
D.ٹیرابائٹ

Answer: A.किलोबाईट
A.Kilobyte
A.کیلو بائٹ

199 Choose the word which is opposite in meaning to the given word.
BROAD

A.Narrow

B.Wide

C.Large

D.Huge

Answer: A.Narrow

200 Fill in the blank with the correct article.
I play _____piano.

A.the

B.a

C.an

D.No article required

Answer: A.the

For More Info And Videos About TAIT-Exam Syllabus And Other Exam Visit My Channel
TAIT च्या 30 प्रश्नपत्रिका PDF
BADSHAHimp Available Request 9765226781
WWW.YouTube.com/BADSHAHimp
Subscribe My Channel

Question Paper Title : TAIT_PAPER_27

Date of Exam : 2017-12-13 16:00:00.0

1

सूचना: खालील प्रश्नात, दिलेल्या पर्यायांमधून नातेसंबंध सांगणारी आकृती निवडा

DIRECTIONS: In the question below, select the related figure from the given alternatives.

ہدایات: ذیل کے سوال میں، دئے گئے متبادلات میں سے متعلقہ تصویر منتخب کریں۔

Problem Figures:

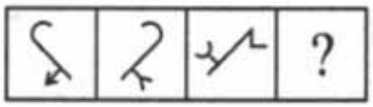

(A) (B) (C) (D)

Answer Figures:

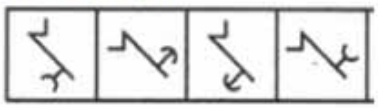

(1) (2) (3) (4)

A. 1

B. 2

C. 3

D. 4

Answer: B. 2

2

संपत्तीचे अधिकार:

Right to property is:

حق ملکیت ہے

A.वैश्विक अधिकार
A.Universal right
A. یونیورسل حق

B.मुक्त अधिकार
B.Free right
B. مفت حق

C.कायदेशीर अधिकार
C.Legal right
C. قانونی حق

For More Info And Videos About TAIT-Exam Syllabus And Other Exam Visit My Channel
TAIT च्या 30 प्रश्नपत्रिका PDF
BADSHAHimp Available Request 9765226781
YouTube WWW.YouTube.com/BADSHAHimp
Subscribe My Channel

D.मुलभूत अधिकार
D.Fundamental right
D. بنیادی حق.

Answer:

C.कायदेशीर अधिकार
C.Legal right
C. قانونی حق

3 भाषेची सर्वोत्कृष्ठ कल्पना आहे-

Language is best thought of as—

زبان کے طور پر بہترین خیال ہے—

A.एक जैविक (कल्पनात्मक) निर्माण
A.A biological (instinctive) development
A.حیاتیاتی (مثالی) ترقی

B.प्रभावी प्रश्न- सोडविण्यासाठी चिन्हांची एक रचना
B.A system of symbols for effective problem-solving
B.مؤثر دشواری حل کرنے کے لئے علامتوں کا ایک نظام

C.कॅटलॉगच्या अनुभवांकरिता केलेले नामकरण
C.A nomenclature for cataloguing experience
C.کیٹلاگنگ تجربے کے لئے ایک فرہنگ

D.स्वत:च्या विकासासाठी एक माध्यम
D.A medium for self-enhancement
D.خود کو بڑھانے کے لئے ایک ذریعہ

Answer:

C.कॅटलॉगच्या अनुभवांकरिता केलेले नामकरण
C.A nomenclature for cataloguing experience
C.کیٹلاگنگ تجربے کے لئے ایک فرہنگ

4 शिकवताना कदाचित सर्वात मोठे समाधान-

Probably the greatest satisfaction in teaching is—

شاید تعلیم کا سب سے بڑا اطمینان --- ہے-

A.धन लाभ व नोकरीची- सुरक्षितता
A.Monetary rewards and job-security
A.مالیاتی انعامات اور نوکری کی حفاظت

For More Info And Videos About TAIT-Exam Syllabus And Other Exam Visit My Channel
TAIT च्या 30 प्रश्नपत्रिका PDF
BADSHAHimp Available Request 9765226781
YouTube WWW.YouTube.com/BADSHAHimp
Subscribe My Channel

B.समाजसेवेची जाणीव
B.A sense of service to society
B.معاشرے کی خدمت کا احساس

C.विद्यार्थ्याच्या सर्वांगीण वाढीत योगदानाची जाणीव
C.A sense of contribution to pupil's growth
C.طالب علم کی ترقی میں شراکت کا احساس

D.विद्यार्थ्यांचा नेता व प्रमुख म्हणून दर्जा व अधिकारची जाणीव
D.A sense of status and power as leader and master of children
D.رہنما اور بچوں کے ماسٹر کے طور پر حیثیت اور طاقت کا احساس

Answer: C.विद्यार्थ्याच्या सर्वांगीण वाढीत योगदानाची जाणीव
C.A sense of contribution to pupil's growth
C.طالب علم کی ترقی میں شراکت کا احساس

5 फ्लिपकार्ट ही _____ ची भारतीय आवृत्ती आहे

Flipkart is the Indian version of -

فلپ کارٹ بھارتی ورژن ہے

A.पे पाल
A.Pay Pal
A.پے پال کا

B.व्हॉट्स ॲप
B.Whatsapp
B.وہاٹس ایپ کا

C.किंडल
C.Kindle
C.کِنڈل کا

D.ॲमेझॉन
D.Amazon
D.امیزن کا

Answer: D.ॲमेझॉन
D.Amazon
D.امیزن کا

For More Info And Videos About TAIT-Exam Syllabus And Other Exam Visit My Channel
TAIT च्या 30 प्रश्नपत्रिका PDF
BADSHAHimp Available Request 9765226781
WWW.YouTube.com/BADSHAHimp
Subscribe My Channel

6	खालीलपैकी कोणता कोळश्याचा प्रकार नाही? Which one of the following is not a coal variety? مندرجہ ذیل میں سے کون کوئلہ کی قسم نہیں ہے؟
	A.बिटुमिनस A.Bituminous A.بیٹومینس
	B.लिग्नाइट B.Lignite B.لگنائٹ
	C.पीट C.Peat C.پیٹ
	D.डोलोमाइट D.Dolomite D.ڈولومائٹ
Answer:	D.डोलोमाइट D.Dolomite D.ڈولومائٹ
7	$\sqrt{(5-1)^2} + \sqrt{(5-3)^2} = ?$
	A. 18
	B. 6
	C. 35
	D. 28
Answer:	B. 6
8	बृहदेश्वर मंदिर कुठे स्थित आहे? Where is the Brihadeeswarar Temple situated? برہدیشور مندر ہے۔

For More Info And Videos About TAIT-Exam Syllabus And Other Exam Visit My Channel
TAIT च्या 30 प्रश्नपत्रिका PDF
BADSHAHimp Available Request 9765226781
YouTube WWW.YouTube.com/BADSHAHimp
Subscribe My Channel

A.मैसूर
A.Mysore
A.میسور میں

B.तिरुवनंतपूरम
B.Thiruvananthapuram
B.تھروونتھپورم میں

C.पुदुचेरी
C.Puducherry
C.پوڈوچیری میں

D.तंजावूर
D.Thanjavur
D.تھنجور میں

Answer: D.तंजावूर
D.Thanjavur
D.تھنجور میں

9 35 ने अचूकपणे विभाज्य असलेली सर्वांत मोठी पाच अंकी संख्या काढा?

Find the greatest five-digit number which is exactly divisible by 35?

سب سے بڑا پانچ عددی تلاش کریں جو 35 سے پورا تقسیم ہوتا ہو۔

A.99955
A.99955
A.99955

B.99995
B.99995
B.99995

C.98995
C.98995
C.98995

D.99555
D.99555
D.99555

Answer: B.99995
B.99995
B.99995

For More Info And Videos About TAIT-Exam Syllabus And Other Exam Visit My Channel
TAIT च्या 30 प्रश्नपत्रिका PDF
BADSHAHimp Available Request 9765226781
WWW.YouTube.com/BADSHAHimp
Subscribe My Channel

10

A ही B ची बहीण आहे. C हा D चा भाऊ आहे. D ही A ची बहीण आहे. B चे D सोबत नाते काय?

A is sister of B. C is brother of D. D is a sister of A. How is B related to D?

A B کی بہن ہے . C D کا بھائی ہے. D A کی بہن ہے. B کا D سے کیا رشتہ ہے؟

A.भाऊ
A.Brother
A.بھائی

B.भाऊ किंवा बहीण
B.Brother or Sister
B. بھائی یا بہن

C.बहीण
C.Sister
C.بہن

D.माहिती अपुरी आहे
D.Data inadequate
D.ڈیٹا ناکافی

Answer:

B.भाऊ किंवा बहीण
B.Brother or Sister
B. بھائی یا بہن

11

दिलेल्या पर्यायांपैकी कोणती आकृती मुख्य आकृतीचे अचूक प्रतिबिंब आहे?

Which of the answer figure is exactly the mirror image of the given figure?

جواب کی کون سی تصویر، دی گئی تصویر کی بالکل صحیح آئینہ دار تصویر لگتی ہے؟

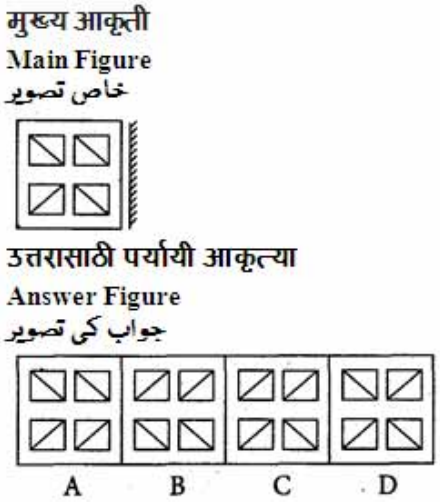

A. (A)

B. (B)

C. (C)

D. (D)

Answer: C. (C)

12 वर्गातील गोंधळ शांत केल्यानंतर, शिक्षकाची महत्वाची चिंता असायला पाहिजे-

After subsiding a disturbance in the classroom, the teacher's main concern should be——

- کلاس روم میں ایک مصیبت کو نمٹنےکے بعد، استاد کا اہم تحفظ یہ ہونا چاہئے

A.सर्व दोषींना शिक्षा करणे व आपली चूक न कबूल करणाऱ्या वर्तनाची पुनरावर्ती होणार नाही
A.To punish all offenders and thereby forestall the recurrence of unacceptable behavior
A.تمام مجرمین کو سزا دینا اور اس طرح ناقابل قبول رویے کودوبارہ واقع ہونے سے روکنے کے لئے

B.त्यांच्या गैर वर्तनाचे कारण माहित करून घेण्यासाठी, अशा काही उपाययोजना वापरल्या जाऊ शकतात
B.To know the cause of the misbehavior, such that the remedial measures can be taken
B.بدعنوانی کے سبب کو جاننے کے لئے، اس طرح کہ علاج کے اقدامات لے جا سکتے ہیں

C.घटनेची पुनरावर्ती न होण्यासाठी जवळून देखरेख करणे प्रत्येक शिक्षकाकडून अपेक्षित आहे हे मानसिक ताण कमी करण्याचे एक माध्यमच आहे.
C.To provide closer supervision as a means of preventing the recurrence of the incident to reduce the demands made upon the individuals involved as a means of reducing tension
C.حادثے کو کم کرنے کے ایک ذریعہ کے طور پر، ملوث لوگوں پر کئے گئے مطالبات کو کم کرنے کے لئے واقعے کی بحالی کی روک تھام کو ایک ذریعہ کے طور پر قریبی نگرانی فراہم کرنے کے لئے

D.भविष्यात अश्या दुर्व्यवहार रोखण्यासाठी अशा त्रास देणाऱ्या विद्यार्थींना ब्लेकलिस्ट करून टाकू
D.To blacklist the trouble-inducing students as a means of curbing future misbehavior.
D.مستقبل کے بدعنوانی سے بچنے کے ذریعہ کے طور پر مصیبت پیدا کرنے والے طالب علموں کوبلیک لسٹ کرنا.

Answer: B.त्यांच्या गैर वर्तनाचे कारण माहित करून घेण्यासाठी, अशा काही उपाययोजना वापरल्या जाऊ शकतात
B.To know the cause of the misbehavior, such that the remedial measures can be taken
B.بدعنوانی کے سبب کو جاننے کے لئے، اس طرح کہ علاج کے اقدامات لے جا سکتے ہیں

13 स्वयंपाक घरातला किंवा स्वयंपाकासाठीचा गॅस याचे मिश्रण असतो—

Kitchen or Cooking Gas is a mixture of—

- کیچن یا کھانا بنانے والی گیس _____ کی ایک مرکب ہوتی ہے

A.मिथेन आणि इथिलीन
A.Methane and Ethylene
A.میتھین اور ایتھیلین

B.कार्बन डायऑक्साइड आणि ऑक्सिजन
B.Carbon dioxide and oxygen
B.کاربن ڈائی آکسائڈ اور آکسیجن

C.ब्यूटेन आणि प्रोपेन
C.Butane and Propane
C.بوٹین اور پروپین

D.कार्बन मोनॉक्साईड आणि कार्बन डायऑक्साइड
D.Carbon Mono oxide and carbon dioxide
D.کاربن مونو آکسائڈ اور کاربن ڈائی آکسائڈ

Answer: C.ब्यूटेन आणि प्रोपेन
C.Butane and Propane
C.بوٹین اور پروپین

14 मधुबनी चित्रे ही मुळची _____ या राज्यामधील आहेत

Madhubani paintings are indigenous to the state of -

مدھوبنی پینٹنگز حصہ ہیں۔

A.पश्चिम बंगाल
A.West Bengal
A.مغربی بنگال کا

B.ओडीसा
B.Odisha
B.اوڑیسہ کا

C.बिहार
C.Bihar
C.بہار کا

D.यांपैकी कोणतेही नाही
D.None of these
D.ان میں سے کوئی نہیں

Answer: C.बिहार
C.Bihar
C.بہار کا

For More Info And Videos About TAIT-Exam Syllabus And Other Exam Visit My Channel
TAIT च्या 30 प्रश्नपत्रिका PDF
BADSHAHimp Available Request 9765226781
WWW.YouTube.com/BADSHAHimp
Subscribe My Channel

15	Out of the given options, choose the one which is the correct indirect speech of the sentence given below. Elizabeth said, “I was walking along the street”.
	A.Elizabeth says that she was walking along the street.
	B.Elizabeth said that she had been walking along the street.
	C.Elizabeth said that she have been walking along the street.
	D.Elizabeth says that she had walked along the street.
Answer:	B.Elizabeth said that she had been walking along the street.

16	32, 23, 17 या संख्यांचा मध्यक काढा. What is the median of the numbers 32, 23, 17,? دئے ہوئے اعداد کا اوسط (میڈین) ہوگا 32,23,17
	A.23 A.23 A.23
	B.28 B.28 B.28
	C.24 C.24 C.24
	D.29 D.29 D.29
Answer:	A.23 A.23 A.23

For More Info And Videos About TAIT-Exam Syllabus And Other Exam Visit My Channel
TAIT च्या 30 प्रश्नपत्रिका PDF
BADSHAHimp Available Request 9765226781
WWW.YouTube.com/BADSHAHimp
Subscribe My Channel

17 निर्देश: खालील प्रत्येक वर्ण मालिके मध्ये, काही अक्षरे गहाळ आहेत, जे खाली दिलेल्या पर्यायां मध्ये एका क्रमाने दिलेली आहेत. योग्य पर्याय निवडा.

ccbab - caa - bcc - a -

DIRECTION: In each of the following letter series, some of the letters are missing, which are given in that order as one of the alternatives below it. Choose the correct alternative.

ccbab - caa - bcc - a -

ہدایت نیچے دے حرف کے سرج مے کچھ حرف گمشدہ ہے نیچے دے گئے اختیارات سے سسہی اختیار چنے

ccbab - caa - bcc - a -

A.babb
A.babb
A.babb

B.bbba
B.bbba
B.bbba

C.baab
C.baab
C.baab

D.babc
D.babc
D.babc

Answer: A.babb
A.babb
A.babb

18 a = -4 असेल तर $2^{7+2a} \div 3^{3a+11}$ चे मूल्य काढा:

Find the value of $2^{7+2a} \div 3^{3a+11}$ for a = -4:

$2^{7+2a} \div 3^{3a+11}$ کی قیمت معلوم کریں: کے لئے a = -4

A. 2/3

B. 3/2

C. 1

D. -2/3

For More Info And Videos About TAIT-Exam Syllabus And Other Exam Visit My Channel
TAIT च्या 30 प्रश्नपत्रिका PDF
BADSHAHimp Available Request 9765226781
YouTube WWW.YouTube.com/BADSHAHimp
Subscribe My Channel

Answer: B. 3/2

19 सूचना: दिलेल्या पर्यायांमधून श्रेणी पूर्ण करणारी योग्य आकृती निवडा.

DIRECTIONS: Complete the series by choosing right figure from the given choices.

ہدایات: دئے گئے انتخابات میں سے صحیح تصویر کو منتخب کرکے سلسلہ مکمل کریں۔

Problem Figures

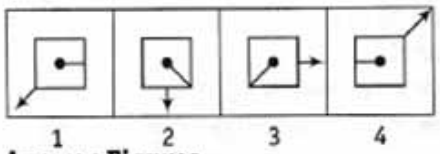

Answer Figures

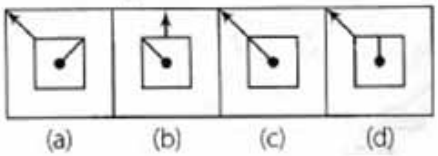

A. (A)

B. (B)

C. (C)

D. (D)

Answer: D. (D)

20 कापडाचे दुकान "तीन खरेदी करा, एक मोफत मिळवा" ऑफर करत आहे. दुकानाद्वारे ऑफर केल्या जाणाऱ्या सवलतीची निव्वळ टक्केवारी काय आहे?

A cloth store is offering “Buy 3, get 1 free”. What is the net percentage discount being offered by the store?

ایک کپڑے کی دکان میں پیش کش ہے کہ "3 خریدیں، 1 مفت حاصل کریں". اسٹور کی طرف سے پیش کردہ خالص فی صد رعایت کیا ہے؟

A.20%
A.20%
A.20%

B.25%
B.25%
B.25%

For More Info And Videos About TAIT-Exam Syllabus And Other Exam Visit My Channel
TAIT च्या 30 प्रश्नपत्रिका PDF
BADSHAHimp Available Request 9765226781
WWW.YouTube.com/BADSHAHimp
Subscribe My Channel

C.30%
C.30%
C.30%

D.40%
D.40%
D.40%

Answer: B.25%
B.25%
B.25%

21 पुढील जोडशब्द पूर्ण करा . ‘ नाते ----------’

A.लग

B.वाईक

C.गोते

D.माझे

Answer: C.गोते

22 जेव्हा रूग्णाला कुणीतरी प्रत्यक्ष बोलत आहेत असे आवाज किंवा ध्वनी ऐकू येतात तेव्हा म्हणतात

When a patient hears sounds or voices who speaks directly to patient is called

جب کوئی مریض کوئی ایسی آواز یا پکار سنتا ہے جو براہ راست اس سے باتیں کر رہی ہوتی ہے تو اسے کہا جاتا ہے:

A.स्पर्शयोग्य आभास
A.Tactile hallucination
A.محسوس کیا جانے والا واہمہ

B.शारीरिक आभास
B.Somatic hallucination
B.مادی واہمہ

C.श्रवण आभास
C.Auditory hallucination
C. سمعی واہمہ

D.दृष्य आभास
D.Visual hallucination
D.بصری واہمہ

Answer: D.दृष्य आभास
D.Visual hallucination
D.بصری واہمہ

23 धातूचे प्रदिपण यामुळे होते —

Illumination of Metal is caused by the —

دھات کا ایلومینیشن (طلاکاری) کی وجہ ہے۔

A.अणूला जवळजवळ पॅक केल्यामुळे निर्माण झालेली उच्च घनता
A.High density due to close packing of atoms
A.ایٹم کے قریبی پیکنگ کی وجہ سے شدید کثافت

B.अत्यंत उत्कृष्ट
B.Highly Polished
B.بہت زیادہ پولش

C.मुक्त इलेक्ट्रॉनच्या उपस्थितीमुळे प्रकाशाचे परावर्तन
C.Reflection of Light due to presence of free electrons
C.فری الیکٹرون کی موجودگی کی وجہ سے روشنی کا انعکاس

D.खाच्याच्या उपस्थितीमुळे प्रकाशाचे शोषण
D.Absorption of Light due to presence of sockets.
D.سوکیٹ کی موجودگی کی وجہ سے روشی کا انجذاب

Answer: C.मुक्त इलेक्ट्रॉनच्या उपस्थितीमुळे प्रकाशाचे परावर्तन
C.Reflection of Light due to presence of free electrons
C.فری الیکٹرون کی موجودگی کی وجہ سے روشنی کا انعکاس

24 जर स्वमग्न मुलांचे वयाच्या____ व्या वर्षापूर्वी निदान झाले तर रोगाचे निदान सुधारले जाते

If children with autism are diagnosed before the age of ____ then prognosis is improved

اگر کسی بچہ میں خود خیال کی تشخیص_____ کی عمر سے قبل ہوئی تب پھر تشخیص مرض میں اصلاح ہوتی ہے

A.5
A.5
A.5

B.7
B.7
B.7

C.3
C.3
C.3

D.10
D.10
D.10

Answer: C.3
C.3
C.3

25 ‘ झंझावात ‘ या शब्दाचा विरुद्धार्थी शब्द कोणता ?

A.वावटळ

B.तुफान

C.नीरवता

D.टाळ वाजविणे

Answer: C.नीरवता

26 चौकोनाचे क्षेत्रफळ x आहे, जर त्याच्या बाजू दुप्पट केल्या गेला तर नवीन क्षेत्रफळ काय असेल

The area of a square is x, if its sides are doubled then the new area is.

ہے،اگر اسکی طرفیں نئیے رقبہ سے دوگنی ہیں۔ x ایک مربع کا رقبہ

A.3x
A.3 x
A.3 x

B.2x
B.2x
B.2x

C.4x
C.4x
C.4x

D.42x
D.42x
D.42x

Answer: C.4x
C.4x
C.4x

27 कदाचित सर्वात महत्वाचे शिक्षण परीणामकारकतेचे निर्धारण करण्याकरिता

Probably the most important of the following determinants of the effectiveness of learning is—

ممکنہ طور پر سیکھنے کی تاثیر کے مندرجہ ذیل محرکاتمیں سب سے اہم ہے-

A.प्रदर्शीत करण्याची पद्धत
A.The method of presentation
A.پریزنٹیشن کا طریقہ

B.जर वितरीत केलेली सामग्री संबंधीत असल्यास अर्थपूर्णत्वाची व समजण्याची, आणि विश्लेषणाची गरज आहे
B.The need of meaningfulness and understanding, and analyzing if the content delivered is relevant.
B.معنی اور سمجھ کی اور تجزیہ ضرورت، اگر ترسیل کردہ مواد متعلقہ ہے.

C.शिक्षण कालावधीवर एकाग्रता
C.The concentration of the learning periods
C.سیکھنے کے ادوار کاارتکاز

D.उच्च शिक्षणाची पदवी
D.The degree of over-learning
D.زیادہ سیکھنے کی ڈگری

Answer: B.जर वितरीत केलेली सामग्री संबंधीत असल्यास अर्थपूर्णत्वाची व समजण्याची, आणि विश्लेषणाची गरज आहे
B.The need of meaningfulness and understanding, and analyzing if the content delivered is relevant.
B.معنی اور سمجھ کی اور تجزیہ ضرورت، اگر ترسیل کردہ مواد متعلقہ ہے.

28

सूचना: खालील प्रश्नात चार आकृत्या दिल्या आहेत. तीन आकृत्यांमध्ये एक विशिष्ट साम्य आहे आणि त्यामुळे त्यांचा एक गट तयार होतो. या गटात न बसणारी आकृती शोधून काढा.

DIRECTIONS: In the following question, four figures are given. Three are similar in a certain way and so form a group. Find out which one of the figures does not belong to that group.

ہدایات: درج ذیل سوال میں چار اعداد و شمار دیئے جاتے ہیں - تین ایک مخصوص طریقہ اور اس صورت میں گروپ ایک ملتے جلتے ہیں - یہ معلوم کریں کہ ان میں سے کس تصویر کا تعلق اس گروپ سے نہیں ہے-

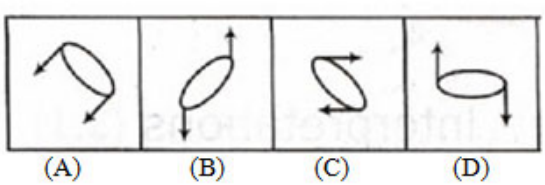

A. (A)

B. (B)

C. (C)

D. (D)

Answer: A. (A)

29 खालीलपैकी कोणते वृक्ष सदाबहार नसतात?

Which of the following is not evergreen tree?

مندرجہ ذیل میں سے کون سا رخت سدا بہار نہیں ہے ؟

A.लाल सिडर
A.Red cedar
A.لال صدار

B.बबूलचे झाड
B.Acacia tree
B.ایکاآسیہ کے درخت

C.तुतीची
C.Mulberries
C.شہتوت (درخت)

D.यापैकी एकही नाही
D.None of these
D.ان مے سے کوئی نہی

Answer: D.यापैकी एकही नाही
D.None of these
D.ان مے سے کوئی نہی

30 ____हे आत्मनिरीक्षणाच्या पद्धतीद्वारे चेतन अनुभवाची रचना अभ्यासण्याचा प्रयत्न करते

____ attempts to study the structure of conscious experience through the method of introspection

محاسبہ کے طریقہ کار کے ذریعہ_____ شعور کے مطالعہ کی کوشش کرنے کا ایک ڈھانچہ ہے

A.संरचनावाद
A.Structuralism
A.ڈھانچہ گت

B.व्यवहारवाद
B.Behaviorism
B.کردار سازی

C.कार्यात्मकता
C.Functionalism
C.فعلیت

D.वरीलपैकी कोणतेही नाही
D.None of the above
D.درج بالا میں سے کوئی نہیں ہے

Answer: A.संरचनावाद
A.Structuralism
A.ڈھانچہ گت

31 बुद्धिमत्तेच्या चाचणीची रचना करताना आपण अशी धारणा करू शकतो कि त्यात लोक चाचपले जातील

Underlying the construction of intelligence tests is the assumption that the people to be tested—

-انٹیلی جنس ٹیسٹ کی تعمیر کے تحت تصور یہ ہے کہ وہ لوگ جن کو ٹیسٹ کیا جائے گا

A.सामान्य बुद्धिमतेचे आहेत
A.Are of normal intelligence
A.عام ذہانت کے ہیں

B.अनुवंशिकतेनुसार जैवशास्त्राच्या दृष्टीकोनातून एकाच वंशातून आहेत
B.Are of the same stock from the biological point of view of heredity
B.وراثت کے حیاتیاتی نقطہ نظر سے اسی اسٹاک میں سے ہیں

C.समान प्रमाणत ज्ञान प्राप्त केले असणार
C.Have gained the same amount of knowledge
C.علم کی ایک ہی مقدار حاصل کی ہے

D.अनुभव फरकातील घटकांत अनुचितरित्या हस्तक्षेप न करता बुद्धीमत्ता म्हणून गणली जाऊ शकते
D.Can be measured as to intelligence without undue interference from the factor of differences in experience
D.تجربے میں اختلافات کے عوامل سے مداخلت کے بغیر ذہانت کے طور پر ماپا جا سکتا ہے

Answer: D.अनुभव फरकातील घटकांत अनुचितरित्या हस्तक्षेप न करता बुद्धीमत्ता म्हणून गणली जाऊ शकते
D.Can be measured as to intelligence without undue interference from the factor of differences in experience
D.تجربے میں اختلافات کے عوامل سے مداخلت کے بغیر ذہانت کے طور پر ماپا جا سکتا ہے

32 सूचना: दिलेल्या माहितीचा काळजीपूर्वक अभ्यास करा आणि खालील प्रश्नांची उत्तरे द्या.
सात खेळ-फेन्सिंग, हॉकी, फुटबॉल, गोल्फ, लाँग जंप, टेबल फुटबॉल आणि अंडरवॉटर हॉकी लागोपाठ सात दिवस आयोजित केले जाणार आहेत (सोमवारपासून सुरु होऊन रविवारी समाप्त) पण ते याच क्रमात असतील असे नाही. एका दिवशी फक्त एक खेळ आयोजित केला जाईल. अंडरवॉटर हॉकीनंतर केवळ दोन खेळांचे आयोजन केले जाईल. टेबल फुटबॉल आणि अंडरवॉटर हॉकीच्या मध्ये केवळ दोन खेळ आयोजित केले जातील. हॉकी आणि लाँग जंपमध्ये केवळ तीन खेळ आयोजित केले जातील. हॉकीचे आयोजन रविवारी केले जाणार नाही. फेन्सिंग गोल्फ आणि फुटबॉलच्या आधी आयोजित केले जाईल (अगदी लगेचच आधी असेल असे नाही). फुटबॉल गोल्फनंतर आयोजित केला जाईल (अगदी लगेच नंतर असेल असे नाही).
गोल्फ कोणत्या दिवशी आयोजित केला जाईल?

DIRECTIONS: Study the given information carefully and answer the given questions.
Seven plays-Fencing, Hockey, Football, Golf, Long jump, Table Football and Underwater Hockey are to be held on seven consecutive days (starting on Monday and ending on Sunday) not necessarily in the same order. Only one play can be held on one day. Only two plays will be held after Underwater Hockey . Only two plays will be held between Table Football and Underwater Hockey . Only three plays will be held between Hockey and Long jump. Hockey will not be held on Sunday. Fencing will be held before Golf and Football (not necessarily immediately before).Football will be held after Golf (not necessarily immediately after).
Golf will be held on which day?

ہدایات: مندرجہ ذیل معلومات کو دھیان سے پڑھیں اور دیے گئے سوالوں کے جواب دیں۔
سات کھیل-فینسنگ، ہاکی، فٹ بال، گولف، لمبی چھلانگ، ٹیبل فٹ بال اور زیر آب ہاکی کو سات لگاتار دنوں میں منعقد کیا جانا ہے (پیر سے شروع ہو کر اور سنیچر میں ختم کرکے) جو ضروری نہیں ہے کہ یکساں ترتیب میں ہوں۔ ایک دن میں صرف ایک کھیل منعقد کیا جا سکتا ہے۔ زیر آب ہاکی کے بعد صرف دو کھیل منعقد ہوں گے۔ ٹیبل فٹ بال اور زیر آب ہاکی کے درمیان صرف دو کھیل منعقد ہوں گے۔ ہاکی اور لمبی چھلانگ کے درمیان صرف تین کھیل منعقد ہوں گے۔ ہاکی اتوار کو نہیں منعقد ہوگا۔ گولف اور فٹ بال سے پہلے فینسنگ کا انعقاد ہوگا (فوری پہلے ضروری نہیں ہے)۔ فٹ بال گولف کے بعد منعقد ہوگا (فوری بعد ضروری نہیں ہے)۔
گولف کس دن منعقد ہوگا؟

A.सोमवार
A.Monday
A.پیر

B.मंगळवार
B.Tuesday
B.منگل

C.बुधवार
C.Wednesday
C.بدھ

D.गुरूवार
D.Thursday
D.جمعرات

Answer: D.गुरूवार
D.Thursday
D.جمعرات

33 सूचना: खालील प्रश्नांमध्ये दिलेल्या पर्यायांमधून संबंधित अक्षर/शब्द/संख्या निवडा.

पिस्तुल : पिस्तुल ठेवण्याची कातडी पिशवी :: ?

DIRECTIONS: In the following question, select the related letter/word/number from the given alternatives.

Revolver : Holster :: ?

سمت: مندرجہ ذیل سوال میں، دیے گئے متبادل سے متعلقہ حرف/لفظ/نمبر منتخب کریں۔

ریوالور : پستول دان :: ؟

A.पाणी : काच
A.Water : Glass
A.پانی : گلاس

B.डोळे : शरीर
B.Eyes : Body
B.آنکھیں : جسم

C.पुस्तक: : फळी
C.Book : Shelf
C.کتاب : شیلف

D.कापड : वस्त्रनिर्माण
D.Cloth : Textile
D.کپڑا : ٹیکسٹائل

Answer: C.पुस्तक: : फळी
C.Book : Shelf
C.کتاب : شیلف

34 दिलेल्या पर्यायांपैकी वेगळे ते निवडा:

Select the odd one out from the given options:

A.FJOR
A.FJOR
A.FJOR

B.IMRV
B.IMRV
B.IMRV

C.MQVY
C.MQVY
C.MQVY

D.BFKN
D.BFKN
D.BFKN

Answer: B.IMRV
B.IMRV
B.IMRV

35 सूचना: प्रत्येक प्रश्नाला एक प्रमुख विधानासोबत चार विधाने आहेत ज्यांच्याखाली A, B, C आणि D असे चार विधान आहेत. क्रमवार विधानांची जोडी निवडा ज्यामध्ये प्रथम विधान दुसऱ्या विधानाला सुचवते, आणि दोन्ही विधाने तर्किकदृष्ट्या प्रमुख विधानासोबत निगडित असेल.

जर त्याने सरकारवर टीका केली, तर तो ट्विटरवर ट्रॉल्ड केला जाईल.
A. त्याने सरकारवर टीका केली
B. त्याने सरकारवर टीका केली नाही
C. तो ट्विटरवर ट्रॉल्ड केला गेला
D. तो ट्विटरवर ट्रॉल्ड केला गेला नाही

DIRECTIONS: Each question has a main statement followed by four statements labelled A, B, C and D. Choose the ordered pair of statements, where the first statement implies the second, and the two statements are logically consistent with the main statement.

If he criticizes the government , he will be trolled on twitter .
A. he criticized the government
B. he did not criticize the government
C. he was trolled on twitter
D. he was not trolled on twitter

ہدایت: ہر سوال میں ایک جملہ ہے جسکے بعد چار جملےاے، بی،سی اور ڈی کے نام سے دئے گئے ہیں اسمیں منسلک جوڑیوں کو چنئے۔ جہاں پہلا جملہ دوسرے جملہ کی اور اشارہ کر رہا ہے اور دو جملے منطقی مرکزی بیان کے مطابق ہیں

اگر وہ حکومت پر تنقید کرتا ہے تو ٹوئٹر پر ٹرول کیا جائے گا۔
Aاس نے حکومت پر تنقید کی ۔
Bاس نے حکومت پر تنقید نہیں کی ۔
Cاسے ٹوئٹر پر ٹرول کیا گیا ۔
Dاسے ٹوئٹر پر ٹرول نہیں کیا گیا ۔

A.AB
A.AB
A.AB

B.BC
B.BC
B.BC

C.DA
C.DA
C.DA

D.DB
D.DB
D.DB

Answer: D.DB
D.DB
D.DB

36 एक फोटो दाखवत, दिनेश म्हणतो, “याचे वडील माझ्या आईचा एकुलता मुलगा आहे.” हा फोटो यांचा आहेः-

Pointing at a photo, Dinesh said, "His father is the only son of my mother." The photo belongs to:-

تصویر کی طرف اشارہ کرکے، دنیش نے کہا، " اسکا باپ میری ماں کا واحد بیٹا ہے." تصویر کسسے تعلق رکھتی تھی:-

A.दिनेश
A.Dinesh
A.دنیش

B.दिनेशचा भाऊ
B.Dinesh's brother
B.دنیش کا بھائی

C.दिनेशचा वडील
C.Dinesh's father
C.دنیش کا باپ

D.दिनेशचा मुलगा
D.Dinesh's son
D.دنیش کا بیٹا

Answer: D.दिनेशचा मुलगा
D.Dinesh's son
D.دنیش کا بیٹا

37	निर्देश: दिलेल्या अंक मालिकेतील चुकीची संज्ञा शोधा: 27, 17, 22, 42, 17, 7, 12 DIRECTIONS: Find the wrong term in the given number series: 27, 17, 22, 42, 17, 7, 12 ہدایت دے گئے نمبرس سرج مے غلط نمبر کھوجے 27, 17, 22, 42, 17, 7, 12
	A.17 A.17 A.17
	B.42 B.42 B.42
	C.7 C.7 C.7
	D.22 D.22 D.22
Answer:	B.42 B.42 B.42
38	विद्युत गोळ्यामध्ये सामान्यत: कोणत्याप्रकारचा वायू भरलेला असतो? In the electric bulb, which type of gas is usually filled? الیکٹرک بلب میں، کسی قسم کی گیس عام طور پر بھری جاتی ہے؟
	A.आर्गॉन A.Argon A.آرگن
	B.नायट्रोजन B.Nitrogen B.نائٹروجن

C.हीलियम
C.Helium
C.ہیلیم

D.हायड्रोजन
D.Hydrogen
D.ہائڈروجن

Answer: B.नायट्रोजन
B.Nitrogen
B.نائٹروجن

39 एक संख्या 17 पेक्षा बरीच मोठी आणि 57 पेक्षा लहान आहे. ती संख्या शोधा?

A number is as much greater than 17 as it is less than 57. Find the number?

ایک عدد 17 سے اتنا ہی بڑا ہے جتنا وہ 57 سے چھوٹا ہے۔عدد معلوم کریں؟

A.36
A.36
A.36

B.37
B.37
B.37

C.40
C.40
C.40

D.44
D.44
D.44

Answer: B.37
B.37
B.37

40 सूचना: खालील प्रश्नांमध्ये दिलेल्या पर्यायांमधून संबंधित अक्षर/शब्द/संख्या निवडा.

841 : 29 :: 289 : ?

DIRECTIONS: In the following question, select the related letter/word/number from the given alternatives.

841 : 29 :: 289 : ?

سمت: مندرجہ ذیل سوال میں، دیے گئے متبادل سے متعلقہ حرف/لفظ/نمبر منتخب کریں۔

841 : 29 :: 289 : ?

A.23
A.23
A.23

B.21
B.21
B.21

C.17
C.17
C.17

D.13
D.13
D.13

Answer: C.17
C.17
C.17

41 सध्याच्या वैद्यकीय, मानसिक, व शैक्षणिक विषयांवर अपराधात्मक विचार करण्यास जोर दिला जातो-

The strongest emphasis in current medical, psychological, and educational thought on the subject of delinquency is on—

موجودہ طبی، نفسیاتی، اور تعلیمی سوچ میں سب سے زیادہ زور قابو پانے کے موضوع پر ہے-

A.निदान
A.Diagnosis
A.تشخیص

B.प्रतिबंध
B.Prevention
B.روک تھام

C.पुनर्वसन
C.Rehabilitation
C.بحالی

D.सामजिक मिळकतीवर आधारित घटक
D.Sociological contributory factors
D.سماجی معاون عوامل

Answer: B.प्रतिबंध
B.Prevention
B.روک تھام

42 भारतीय तिरंग्यामधील धर्म चक्र कशाशी संबंधित आहे –

The Dharma Chakra in the Indian tricolor belongs to -

بھارت کے ترنگے میں موجود دھرم چکر کا تعلق ہے۔

A.हर्षवर्धन
A.Harshavardhana
A.ہرشوردھن سے

B.अशोक
B.Ashoka
B.اشوک سے

C.समुद्रगुप्त
C.Samudragupta
C.سمدرگپت سے

D.शिवाजी
D.Shivaji
D.شواجی سے

Answer: B.अशोक
B.Ashoka
B.اشوک سے

43 सूचना: दिलेल्या माहितीचा काळजीपूर्वक अभ्यास करा आणि खालील प्रश्नांची उत्तरे द्या.
सात खेळ-फेन्सिंग, हॉकी, फुटबॉल, गोल्फ, लाँग जंप, टेबल फुटबॉल आणि अंडरवॉटर हॉकी लागोपाठ सात दिवस आयोजित केले जाणार आहेत (सोमवारपासून सुरु होऊन रविवारी समाप्त) पण ते याच क्रमात असतील असे नाही. एका दिवशी फक्त एक खेळ आयोजित केला जाईल. अंडरवॉटर हॉकीनंतर केवळ दोन खेळांचे आयोजन केले जाईल. टेबल फुटबॉल आणि अंडरवॉटर हॉकीच्या मध्ये केवळ दोन खेळ आयोजित केले जातील. हॉकी आणि लाँग जंपमध्ये केवळ तीन खेळ आयोजित केले जातील. हॉकीचे आयोजन रविवारी केले जाणार नाही. फेन्सिंग गोल्फ आणि फुटबॉलच्या आधी आयोजित केले जाईल (अगदी लगेचच आधी असेल असे नाही). फुटबॉल गोल्फनंतर आयोजित केला जाईल (अगदी लगेच नंतर असेल असे नाही).
कोणता खेळ फुटबॉल नंतर लगेच आयोजित केला जाईल?

DIRECTIONS: Study the given information carefully and answer the given questions.
Seven plays-Fencing, Hockey, Football, Golf, Long jump, Table Football and Underwater Hockey are to be held on seven consecutive days (starting on Monday and ending on Sunday) not necessarily in the same order. Only one play can be held on one day. Only two plays will be held after Underwater Hockey . Only two plays will be held between Table Football and Underwater Hockey . Only three plays will be held between Hockey and Long jump. Hockey will not be held on Sunday. Fencing will be held before Golf and Football (not necessarily immediately before).Football will be held after Golf (not necessarily immediately after).
Which play will be held immediately after Play Football?

ہدایات: مندرجہ ذیل معلومات کو دھیان سے پڑھیں اور دیے گئے سوالوں کے جواب دیں۔
سات کھیل-فینسنگ، ہاکی، فٹ بال، گولف، لمبی چھلانگ، ٹیبل فٹ بال اور زیر آب ہاکی کو سات لگاتار دنوں میں منعقد کیا جانا ہے (پیر سے شروع ہو کر اور سنیچر میں ختم کرکے) جو ضروری نہیں ہے کہ یکساں ترتیب میں ہوں۔ ایک دن میں صرف ایک کھیل منعقد کیا جا سکتا ہے۔ زیر آب ہاکی کے بعد صرف دو کھیل منعقد ہوں گے۔ ٹیبل فٹ بال اور زیر آب ہاکی کے درمیان صرف دو کھیل منعقد ہوں گے۔ ہاکی اور لمبی چھلانگ کے درمیان صرف تین کھیل منعقد ہوں گے۔ ہاکی اتوار کو نہیں منعقد ہوگا۔ گولف اور فٹ بال سے پہلے فینسنگ کا انعقاد ہوگا (فوری پہلے ضروری نہیں ہے)۔ فٹ بال گولف کے بعد منعقد ہوگا (فوری بعد ضروری نہیں ہے)۔
فٹ بال کے کھیل کے فوراً بعد کون سا کھیل منعقد ہوگا؟

A.लाँग जंप
A.Long jump
A.لمبی چھلانگ

B.टेबल फुटबॉल
B.Table Football
B.ٹیبل فٹ بال

C.हॉकी
C.Hockey
C.ہاکی

D.अंडरवॉटर हॉकी
D.Underwater Hockey
D.زیر آب ہاکی

Answer: A.लाँग जंप
A.Long jump
A.لمبی چھلانگ

44 आपल्या आजच्या ज्ञानाच्या प्रकाशानुसार न्युरोफिजीओलॉजी समजण्याकरिता खालील दिलेल्यापैकी सर्वात अचूक विधान कोणते?

Which of the following statements appears most accurate in the light of our present knowledge of the neurophysiology underlying learning?

مندرجہ بالا بیانات میں سے کون سا بیان نیورو فیزیالوجی کے بارے میں ہمارے موجودہ علم کی روشنی میں سب سے زیادہ درست لگتا ہے؟

A.शिक्षण घेताना मज्जातंतू म्हणजे दिलेल्या रीसेप्टर व दिलेल्या इफेक्टर मधील दुरध्वनीच्या प्रकारचे कनेक्शन असते
A.Learning involves neural fibres in a telephonic type connection between a given receptor and a given effector
A.سیکھنے کا عملنیورل ریشوں کےوصول کنندہ اور موثر کے درمیان ایک ٹیلی فونک قسم کا تعلق کو شامل ہیں

B.) इतर न्युरोफिजीओलॉजीकलच्या आधारावर शिक्षण आपल्याला स्वतंत्र आहे हे दिसून येते
B.Learning appears independent of any neurophysiological basis
B.سیکھنے کا عمل کسی نیورو فیزیالوجیکل بنیاد سے آزاد ہوتا ہے

C.शिक्षण घेण्याची क्षमता हि मेंदूच्या वस्तुमानापासून स्वतंत्र असते
C.Learning capacity to be independent of the mass of the brain
C.دماغ کے بڑے پیمانے پر آزاد ہونے کی صلاحیت سیکھنا

D.आजपर्यंत, एखादी व्यक्ती शिकत असताना तिच्यात न्युरोफिजीओलॉजीकल बदल घडत असतात हे मानसशास्त्रज्ञला आजपर्यंत शोधता आले नाही
D.To date, Psychologists have not been able to discover clearly the neurophysiological changes occurring as a person learns
D.جب کوئی شخص سیکھتا ہے تو اس میں ہونے والی نیورو فیزیالوجیکل تبدیلیوں کو اب تک، ماہر نفسیات واضح طور پر دریافت کرنے میں کامیاب نہیں ہوئے ہیں

Answer: D.आजपर्यंत, एखादी व्यक्ती शिकत असताना तिच्यात न्युरोफिजीओलॉजीकल बदल घडत असतात हे मानसशास्त्रज्ञला आजपर्यंत शोधता आले नाही
D.To date, Psychologists have not been able to discover clearly the neurophysiological changes occurring as a person learns
D.جب کوئی شخص سیکھتا ہے تو اس میں ہونے والی نیورو فیزیالوجیکل تبدیلیوں کو اب تک، ماہر نفسیات واضح طور پر دریافت کرنے میں کامیاب نہیں ہوئے ہیں

45 सूचना : खालील प्रत्येक प्रश्नात दोन विधाने I आणि II दिलेले आहेत. हे विधान एकतर स्वतंत्र कारण असू शकतात किंवा स्वतंत्र कारणांचे परिणाम असू शकतात. यांपैकी एक विधान इतर विधानाचा परिणाम असू शकतो. दोन्ही विधाने वाचा आणि खालीलपैकी कोणत्या उत्तराचा पर्याय या दोन्ही विधानांमधील संबंधांचे वर्णन करतो ते ठरवा.

विधान :
I. दहशतवादी कारवायांनी जनतेच्या मानसिक शांततेचा ऱ्हास झाला आहे.
II. जड पाण्याच्या शोधात आपल्या देशाचा उपक्रम आपल्या लोकांच्या मताप्रमाणे होतो.

DIRECTIONS: Below in each question are given two statements I and II. These statements may be either independent causes or may be effects of independent causes. One of these statements may be the effect of the other statement. Read both the statements and decide which of the following answer choice correctly depicts the relationship between these two statements.

Statements:
I. Terrorist operations have ruined the peace of mind of the public.
II. Our country's venture into exploration of heavy water has come as conciliation to its people.

ہدایات: نیچے ہر سوال میں دو بیانات I اور II دیے گئے ہیں۔ یہ بیانات یا تو آزاد وجوہات کے اثرات ہو سکتے ہیں۔ ان بیانات میں سے ایک بیان دوسرے کا اثر ہو سکتا ہے۔دونوں بیانات پڑھیں اور فیصلہ کریں کہ نیچے دیے گئے کس جواب کا انتخاب ان دونوں بیانات کے در میان تعلق کو ٹھیک سے ظاہر کرتا ہے۔

بیانات:
I – دہشت گردی کی کاروائیوں نے عوام کا ذہنی سکون برباد کر دیا ہے۔
II ۔ ہمارے ملک کے بھاری پانی کی تلاش کے منصوبے کی وجہ سے حکومت پر عوام کا اعتماد بحال ہوا ہے۔

A.विधान I कारण आहे आणि विधान II त्याचा परिणाम आहे;
A.Statement I is the cause and statement II is its effect;
A.بیان نمبر I وجہ ہے اور بیان نمبر II اس کا اثر ہے۔

B.विधान II कारण आहे आणि विधान I त्याचा परिणाम आहे
B.Statement II is the cause and statement I is its effect;
B.بیان نمبر II وجہ ہے اور بیان نمبر I اس کا اثر ہے۔

C.विधान I आणि II दोन्ही स्वतंत्र कारणे आहेत;
C.Both the statements I and II are independent causes;
C. دونوں بیانات نمبر I اور نمبر II آزاد وجوہات ہیں۔

D.विधान I आणि II दोन्ही काही सामान्य कारणांचे परिणाम आहेत;
D.Both the statements I and II are effects of independent causes;
D.دونوں بیانات نمبر I اور نمبر II آزاد وجوہات کے اثرات ہیں۔

Answer: C.विधान I आणि II दोन्ही स्वतंत्र कारणे आहेत;
C.Both the statements I and II are independent causes;
C. دونوں بیانات نمبر I اور نمبر II آزاد وجوہات ہیں۔

46 यांपैकी मोठा मानसिक आजार आहे

Major psychosis is

بڑی دماغی مرض ہے

A.मज्जातंतूचा विकार
A.Neurosis
A.نیوروسس

B.स्मृतिभ्रंश
B.Dementia
B.ڈیمینیشا

C.प्रतिक्रियात्मक नैराश्य
C.Reactive depression
C.رد عمل والا ڈپریشن

D.अंतर्भव नैराश्य
D.Endogenous depression
D.انڈوجینس ڈپریشن (دروں زاد ڈپریشن)

Answer: D.अंतर्भव नैराश्य
D.Endogenous depression
D.انڈوجینس ڈپریشن (دروں زاد ڈپریشن)

47 **सूचना:** खालील प्रश्नातील चार पर्यायांपैकी, तीन पर्याय असे आहेत की प्रत्येकातील 3 शब्द एकमेकांशी (A), (B), (C), (D) आणि (E) अशा दिलेल्या 5 पर्यायांपैकी कोणत्याही एका दृष्टीने एकमेकांशी संबंधित आहेत. आणि संबंध दर्शविणारा 1 पर्याय आहे जो खालील आकृतींद्वारा दाखविलेला नाही. ह्या अटीची पूर्तता करणारा संबंध म्हणजे तुमचे उत्तर असेल.

DIRECTION: Out of the four alternatives in each of the following questions, three alternatives are such that the three words in each are related among themselves in one of the five ways represented by (A), (B), (C), (D) and (E) below. And one of the alternatives represents a relationship which is not represented by any of the figures given below. The relationship that complies this condition is your answer.

ہدایت: مندرجہ ذیل سوال میں چار متبادل میں سے، تین متبادل ایسے ہیں کہ ہر ایک میں تین الفاظ آپس میں پانچ طریقوں میں سے ایک میں کے ذریعہ کی گئی ہے۔ اور ایک متبادل ایسے تعلق کی نمائندگی کرتا (A)،(B)،(C)،(D)&(E) متعلق ہیں جن کی نمائندی مندرجہ ذیل ہے جس کی نمائندگی یچے دیے گئے کسی بھی خاکے کے ذریعہ نہیں کی جاتی ہے۔ اس شرط پر پورا اترنے والی شرط آپ کا جواب ہے

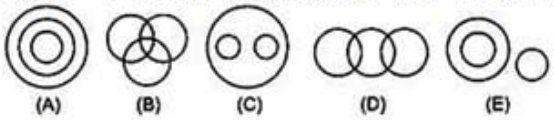

(a) Body, Hand, Finger / शरीर, हात, बोट/جسم، ہاتھ، انگلی

(b) Human, Mother, Woman / मानव, आई, स्त्री/انسان، ماں، عورت

(c) Cereal, Wheat, Rice / तृणधान्य, गहू, तांदूळ/اناج، گیہوں، چاول

(d) Males, Cousins, Nephews / नर, चुलते, पुतणे/مرد، کزن، بھتیجے

A. (A)

B. (B)

C. (C)

D. (D)

Answer: D. (D)

48 . गुन्हा केल्यामुळे दिलेली शिक्षा सर्वात प्रभावी वाटते जेव्हा-

Punishment for a given offense is likely to be most effective when—

-کسی جرم کی سزا ممکنہ طور پر اسوقت سب سے زیادہ مؤثر ہوتی ہے،جب

A.गुन्हा म्हणून पहाता ते तितकेच गंभीर आहे
A.It is as severe as the offense justifies
A.اس کی شدتاتنی ہی ہو جتنا جرم ہے

B.हे प्रत्येक प्रकारच्या गुन्ह्यासाठी लागू केले आहे
B.It is set for each type of offense in advance
B.ہر قسم کے جرم کے لئے یہ پہلے سے مقرر کی جاتی ہے

C.हे ज्या परिस्थितीसाठी वापरला जातो त्यासाठी माफक आहे
C.It is reasonably tied up with the situation for which it is used
C.استعمال ہونے والی صورت حال کے ساتھ یہ معقول طور پر طے ہے

D.हे श्रेणी च्या सहमताने ठरवले जाते व नि:पक्षपात पद्धतीने राबवले जाते
D.It is decided by vote of the class and administered impartially
D.اس کا فیصلہ کلاس کے ووٹ سے کیا جاتا ہے اور غیر جانبدارانہ طور پر انتظام کیا جاتا ہے

Answer: C.हे ज्या परिस्थितीसाठी वापरला जातो त्यासाठी माफक आहे
C.It is reasonably tied up with the situation for which it is used
C.استعمال ہونے والی صورت حال کے ساتھ یہ معقول طور پر طے ہے

49 निर्देश: खालील प्रश्न दिलेल्या शब्दांवर आधारित आहेत.

Lay/ Editor/ Precursor/ Orthodox

जर दिलेल्या शब्दांमध्ये स्वरांना मागील अक्षराने बदलले तर व्यंजनाची जागा त्याच्या पुढच्या अक्षराने बदलली तर किती शब्दन मध्ये किमान एक स्वर असेल?

DIRECTIONS: Following question is based on the given words.

Lay/ Editor/ Precursor/ Orthodox

If in the given words vowels are replaced with its previous letter and Consonant are replaced with its next letter then how many words have at least one vowel?

ہدایت جیل کے سوال دے ہے لفجونپر مشتمل ہیں

Lay/ Editor/ Precursor/ Orthodox

اگر ان لفجوں مے ہر حرف کو انگریجی حرف تہجیبی کے اگلے حرف سے بدلہ جائے تو صرف یک واول والے کتنے لفج ہونگے؟

A.एक
A.One
A.ایک

B.दोन
B.Two
B.دو

C.तीन
C.Three
C.تین

D.चार
D.Four
D.چار

Answer: B.दोन
B.Two
B.دو

50 A, B आणि C यांच्यासोबत रु. 4200 रुपयांत एक काम करण्यासाठी करार करण्यात आला. A हा 6 दिवसांत काम पूर्ण करू शकतो; B तेच काम 10 दिवसांत आणि C तेच काम 12 दिवसांत पूर्ण करू शकतो. जर ते काम पूर्ण करण्यासाठी एकत्र काम करत असतील, तर C चा वाटा काय असेल?

A, B and C contracted to do a work for Rs. 4200. A can do the work in 6 days; B can do it in 10 days and C can do it in 12 days. If they work together to do the work, then what will be the share of C?

A ، B اور C نے 4200 میں کام کرنے کا معاہدہ کیا۔ A 10 دنوں میں کر سکتا ہے، B اس کام کو 6 دنوں میں اور C 12 دنوں میں اس کام کو کر سکتا ہے۔ اگر یہ سارے مل کر کام کریں تو C کا کتنا حصہ ہو گا؟

A.रु. 2000
A.Rs.2000
A.Rs.2000

B.रु. 1200
B.Rs.1200
B.Rs.1200

C.रु. 1000
C.Rs.1000
C.Rs.1000

D.रु. 1500
D.Rs.1500
D.Rs.1500

Answer: C.रु. 1000
C.Rs.1000
C.Rs.1000

51 DIRECTIONS: A sentence with an underlined phrasal verb is given below. Out of the four options, choose the one which can be substituted for the given phrasal Verb.
All have to pull together for a good cause.

A.cooperate

B.dissuade

C.demotivate

D.discourage

Answer: A.cooperate

52 माहिती मिळविण्यासाठी आणि प्रक्रिया करण्याशी संबंधित सर्व मानसिक प्रक्रिया म्हणजे-

All those mental processes that deal with obtaining and processing of information are

وہ تمام دماغی اعمال جو معلومات کے حصول اور اس کے پروسیس کا کام انجام دیتے ہیں وہ ہیں:

A.साचेबंद
A.Stereotypes
A.اسٹیریو ٹائپ

B.बोधात्मक
B.Cognitions
B.کاگنیشن(بیداری)

C.(a) आणि(b)दोन्ही
C.Both (a) & (b)
C.a اور b دونوں

D.यापैकी एकही नाही
D.None of these
D.ان میں سے کوئی نہیں

Answer: B.बोधात्मक
B.Cognitions
B.کاگنیشن(بیداری)

53 चुकीची जोडी शोधा-

Find the wrong pair-

غلط جوڑی تلاش کریں

A.बंदीपुर राष्ट्रीय उद्यान - कर्नाटक
A.Bandipur National Park - Karnataka
A. باندیپورنیشنل پارک - کرناٹک

B.सरिस्का राष्ट्रीय उद्यान - राजस्थान
B.Sariska National Park - Rajasthan
B. سرسکا نیشنل پارک - راجستھان

C.अन्नामलई राष्ट्रीय उद्यान - तामिळनाडू
C.Anamalai National Park - Tamil Nadu
C. اننا ملائی نیشنل پارک - تامل ناڈو

D.पेरियार राष्ट्रीय उद्यान - आंध्र प्रदेश
D.Periyar National Park - Andhra Pradesh
D. پیریار نیشنل پارک - آندھرا پردیش

Answer: D.पेरियार राष्ट्रीय उद्यान - आंध्र प्रदेश
D.Periyar National Park - Andhra Pradesh
D. پیریار نیشنل پارک - آندھرا پردیش

54 बौद्धिक पातळीचे (आय.क्यू) निर्देशांक आहे-

The Intelligence Quotient (I.Q.) is an index of—

انٹیلی جنس کوئٹینٹ (آئی.کیو) ایک اشاریہ ہے-

A.मानसिक विकासाची पातळी
A.The level of mental development
A.ذہنی ترقی کی سطح

B.मानसिक विकासाचा दर
B.The rate of mental development
B.دماغی ترقی کی شرح

C.मानसिक क्षमता प्राप्त करण्यासाठी ची शेवटची पातळी
C.The final level of mental ability to be attained
C.حاصل ہونے والی ذہنی صلاحیت کی حتمی سطح

D.मानसिक परिपक्वतेची पदवी
D.The degree of mental maturity
D.ذہنی پختگی کی ڈگری

Answer: B.मानसिक विकासाचा दर
B.The rate of mental development
B.دماغی ترقی کی شرح

55 एका माणसाने पश्चिमेकडे चालायला सुरुवात केली, तो उजवीकडे वळला, मग पुन्हा उजवीकडे वळला आणि शेवटी डावीकडे वळला. तर आता तो कुठल्या दिशेला चालत आहे?

A man started walking west. He turned right and moves 5km and then he turned right and moves 8 km and finally turned left. Towards which direction was he walking now?

ایک آدمی نے مغرب کی طرف چلنا شروع کیا اور وہ دائیں مڑا، پھر دوبارہ دائیں اور آخر میں بائیں مڑا۔ اب وہ کس سمت کی طرف چل رہا تھا؟

A.पूर्व
A.East
A.مشرق

B.पश्चिम
B.West
B.مغرب

C.उत्तर
C.North
C.شمال

D.दक्षिण
D.South
D.جنوب

Answer: C.उत्तर
C.North
C.شمال

56 निर्देश: खालील शब्दांची इंग्रजी शब्दकोशानुसार मांडणी करा.
(a) Hobby
(b) Holiday
(c) Hoarse
(d) Hollow
(e) Hobble

DIRECTIONS: Arrange the following words according to the English dictionary.
(a) Hobby
(b) Holiday
(c) Hoarse
(d) Hollow
(e) Hobble

ہدایت: انگریزی لغت کے مطابق مندرجہ ذیل الفاظ کو مرتب کریں۔

Hobby (a)
Holiday (b)
Hoarse (c)
Hollow (d)
Hobble(e)

A.(c), (e), (a), (b), (d)
A.(c), (e), (a), (b), (d)
A.(c), (e), (a), (b), (d)

B.(a), (e), (c), (d), (b)
B.(a), (e), (c), (d), (b)
B.(a), (e), (c), (d), (b)

	C.(c), (e), (a), (d), (b) C.(c), (e), (a), (d), (b) C.(c), (e), (a), (d), (b)
	D.(e), (c), (a), (d), (b) D.(e), (c), (a), (d), (b) D.(e), (c), (a), (d), (b)
Answer:	A.(c), (e), (a), (b), (d) A.(c), (e), (a), (b), (d) A.(c), (e), (a), (b), (d)

57 सूचना: अर्थपूर्ण परिच्छेद निर्माण करण्यासाठी, खाली दिलेली (P), (Q) (R), (S) आणि (T) ही पाच वाक्ये योग्य अनुक्रमाने पुनर्रचना करा; त्यांनतर खालील प्रश्नांची उत्तर द्या.

P. बऱ्याच कल्पना मांडल्या गेल्या पण मांजरावर मात करता येईल अशी एकही दिसली नाही.
Q. यासाठी, म्हाताऱ्या आणि ज्ञानी उंदराने विचारले "ते ठीक आहे.
R. त्यांचा सामान्य दुश्मन मांजराने निर्माण केलेल्या संकटावर चर्चा करण्यासाठी उंदरांनी सभा भरविली.
S. "पण मांजराच्या गळ्यात घंटा बांधणार कोण ?"
T. तेव्हा एका तरुण उंदराने सुचविले कि, मांजराच्या गळ्यात घंटा बांधल्यास जेव्हा ते येईल तेव्हा कळेल आणि धूर्त मांजराच्या हल्ल्यातून बचाव होईल.

पुनर्रचना केल्यानंतर खालीलपैकी कोणते वाक्य चौथे असेल?

DIRECTION: Rearrange the following five sentences (P), (Q), (R), (S) and (T) in the proper sequence to form a meaningful paragraph; then answer the questions given below them.
P. Lots of ideas were shared, but none seemed good enough to beat the cat.
Q. To this, an old, wise mouse asked, “That’s fine.
R. A horde of mice gathered one night to discuss the problems created by their common enemy, the cat.
S. But who will bell the cat?”
T. Then a young mouse suggested that they should tie a bell around the cat’s neck to know when it is approaching and escape the sly cat’s attacks.

Which of the following should be the FOURTH sentence after rearrangement?

ہدایات: ان پانچ جملوں (P)، (Q)، (R)، (S) اور (T) کو با معنی پیرا بنانے کے لئے دوبارہ ترتیب دیجئے، پھر نیچے دے گئے سوالوں کے جواب دیجئے

P. بہت ساری راے دی گی، لیکن کوئی بھی اچھی نہیں تھی جو بللی کو ہرا سکھے.
Q. اس پر، ایک بوڑھے ،اکل مند چنھے نے کہا،" یے ٹھیک ہے.
R. ایک رات چنہو کی جماعت انکے یکسا دشمن ،بللی کی طرف سے کی جانے والی مشکلات کے بھارے میں گفتگو کرنے کے لئے جمہ ہو گئے.
S. لیکن بللی کی گھنٹی کون بجاےگا.
T. پھر ایک چھوٹے چونھے نے صلہ دی کہ یہ جاننے کے لئے کہ بللی کب آرہی ہے اور چھپنے کے لئے وو بللی کی گردن میں گھنٹی باندیگے.

IV دوبارہ ترییب دینے کے بعد کون سا جملہ چوتھا ہونا چاہیے؟

A.Q
A.Q
A.Q

B.P
B.P
B.P

C.R
C.R
C.R

D.S
D.S
D.S

Answer: A.Q
A.Q
A.Q

58 सूचना: अर्थपूर्ण परिच्छेद निर्माण करण्यासाठी, खाली दिलेली (P), (Q) (R), (S) आणि (T) ही पाच वाक्ये योग्य अनुक्रमाने पुनर्रचना करा; त्यांनतर खालील प्रश्नांची उत्तर द्या.

P. बऱ्याच कल्पना मांडल्या गेल्या पण मांजरावर मात करता येईल अशी एकही दिसली नाही.
Q. यासाठी, म्हाताऱ्या आणि ज्ञानी उंदराने विचारले "ते ठीक आहे.
R. त्यांचा सामान्य दुश्मन मांजराने निर्माण केलेल्या संकटावर चर्चा करण्यासाठी उंदरांनी सभा भरविली.
S. "पण मांजराच्या गळ्यात घंटा बांधणार कोण ?"
T. तेव्हा एका तरुण उंदराने सुचविले कि, मांजराच्या गळ्यात घंटा बांधल्यास जेव्हा ते येईल तेव्हा कळेल आणि धूर्त मांजराच्या हल्ल्यातून बचाव होईल.

पुनर्रचना केल्यानंतर खालीलपैकी कोणते वाक्य तिसरे असेल?

DIRECTION: Rearrange the following five sentences (P), (Q), (R), (S) and (T) in the proper sequence to form a meaningful paragraph; then answer the questions given below them.
P. Lots of ideas were shared, but none seemed good enough to beat the cat.
Q. To this, an old, wise mouse asked, “That’s fine.
R. A horde of mice gathered one night to discuss the problems created by their common enemy, the cat.
S. But who will bell the cat?”
T. Then a young mouse suggested that they should tie a bell around the cat’s neck to know when it is approaching and escape the sly cat’s attacks.

Which of the following should be the THIRD sentence after rearrangement?

ہدایات: ان پانچ جملوں (P)، (Q)، (R)، (S) اور (T) کو با معنی پیرا بنانے کے لئے دوبارہ ترتیب دیجئے، پھر نیچے دے گئے سوالوں کے جواب دیجئے

P. بہت ساری راے دی گی، لیکن کوئی بھی اچھی نہیں تھی جو بللی کو ہرا سکھے.
Q. اس پر، ایک بوڑھے ،اکل مند چنھے نے کہا،" یے ٹھیک ہے.
R. ایک رات چنہو کی جماعت انکے یکسا دشمن ،بللی کی طرف سے کی جانے والی مشکلات کے بھارے میں گفتگو کرنے کے لئے جمہ ہو گئے.
S. لیکن بللی کی گھنٹی کون بجاےگا.
T. پھر ایک چھوٹے چونھے نے صلہ دی کہ یہ جاننے کے لئے کہ بللی کب آرہی ہے اور چھپنے کے لئے وو بللی کی گردن میں گھنٹی باندیگے.

دوبارہ ترییب دینے کے بعد کون سا جملہ تیسرا ہونا چاہیے؟

A.T
A.T
A.T

B.R
B.R
B.R

C.P
C.P
C.P

D.S
D.S
D.S

Answer: A.T
A.T
A.T

59 जर शिंप्याला शिक्षक म्हटले, शिक्षकाला डॉक्टर म्हटले, डॉक्टरला परीट म्हटले, परीटाला पोस्टमन म्हटले, पोस्टमनला आचारी म्हटले, आणि आचार्याला दुकानदार म्हटले, तर आपल्याला कोण शिकवेल?

If tailor is called teacher, teacher is called doctor, doctor is called washerman, washerman is called postman, postman is called cook and cook is called shopkeeper, who will teach us?

اگر درزی کو استاذ، استاذ کو ڈاکٹر، ڈاکٹر کو دھوبی، دھوبی کو ڈاکیا، ڈاکیے کو باورچی اور باورچی کو دوکاندار کہا جائے تو، ہمیں کون پڑھائے گا؟

A.शिंपी
A.Tailor
A.درزی

B.शिक्षक
B.Teacher
B.أستاذ

C.डॉक्टर
C.Doctor
C.ڈاکٹر

D.परीट
D.Washerman
D.دھوبی

Answer: C.डॉक्टर
C.Doctor
C.ڈاکٹر

60 **सूचना**: कागदाच्या एक चौरस तुकड्याला प्रश्नातील (मुख्य) आकृतीत दाखविल्याप्रमाणे मध्यभागी दोन घड्या घातल्या व भोके पाडली तर तो उलगडल्यानंतर कसा दिसेल? उत्तरादाखल दिलेल्या A, B, C, आणि D पर्यायांमधून योग्य आकृती निवडा.

If a square sheet of paper is folded two times from the centre and cuts are made as shown in the problem figure (or main figure) how will it appear when it is opened? Select the appropriate figure from the Answer Figures marked A, B, C, and D.

اگر کاغذ کے ایک چوکور شیٹ کو اس کے بیچ سے دو دفعہ موڑا جاتا ہے اور اسے مسئلہ کی تصویر (یا اہم تصویر) میں دکھائے گئے کے مطابق کاٹا جاتا ہے، تو کھولنے پر یہ کیسا نظر آئے گا؟ A، B، C، اور D کے طور پر لگائے گئے نشان والے جوابی تصاویر میں سے مناسب تصویر کا انتخاب کریں۔

मुख्य आकृती
Main Figure
خاص تصویر

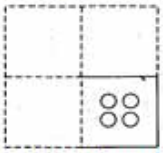

उत्तरासाठी पर्यायी आकृत्या
Answer Figures
جواب کی تصاویر

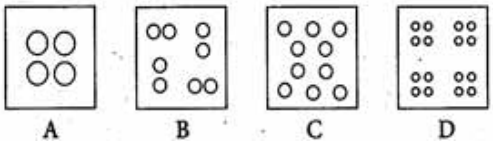

A. (A)

B. (B)

C. (C)

D. (D)

Answer: D. (D)

61 जर A म्हणजे x, B म्हणजे ÷, C म्हणजे + आणि D म्हणजे -, तर 16C 24 B 8 D6 B2 A3 = ?

If A means x, B means ÷, C means + and D means -, then 16C 24 B 8 D6 B2 A3 = ?

16C 24 B 8 D6 B2 A3 = ? تو ۔ مطلب D اور + مطلب C ، ÷ مطلب B ، x مطلب A اگر

A. 13/6

B. -6

C. 29/2

D. 10

Answer: D. 10

62 सूचना: खालील प्रश्नांमध्ये दिलेल्या पर्यायांमधून संबंधित अक्षर/शब्द/संख्या निवडा.

P x Q : 16 x 17 :: L x M : ?

DIRECTIONS: In the following question, select the related letter/word/number from the given alternatives.

P x Q : 16 x 17 :: L x M : ?

سمت: مندرجہ ذیل سوال میں، دیے گئے متبادل سے متعلقہ حرف/لفظ/نمبر منتخب کریں۔

P x Q : 16 x 17 :: L x M : ?

A.13 x 12
A.13 x 12
A.13 x 12

B.12 x 13
B.12 x 13
B.12 x 13

C.16 x 13
C.16 x 13
C.16 x 13

D.17 x 13
D.17 x 13
D.17 x 13

Answer: B.12 x 13
B.12 x 13
B.12 x 13

63 800 वर्षांमध्ये किती लिप वर्षे असतात?

How many Leap Years in 800 years?

800 سالوں میں کتنے لیپ ایئرس ہوتے ہیں؟

	A.200 A.200 A.200
	B.202 B.202 B.202
	C.194 C.194 C.194
	D.197 D.197 D.197
Answer:	C.194 C.194 C.194

64	प्राथमिक शिक्षण यात मदत करते Primary education helps in بنیادی تعلیم کس میں معاون ہوتی ہے
	A.मुलाचे सामाजिकरण A.socialization of child A.بچے کے میل جول میں
	B.अभ्यासक्रम समजून घेणे B.in course understanding B.نصاب کی سمجھ میں
	C.मुलाचे लोकशाहीकरण C.democratization of child C.بچے کو جمہوری بنانے میں
	D.वरीलपैकी सर्व D.all of the above D.درج بالا سبھی
Answer:	D.वरीलपैकी सर्व D.all of the above D.درج بالا سبھی

65		गाणे गाणारा -
		A.गीतकार
		B.संगीतकार
		C.गायक
		D.वरील सर्व
Answer:		C.गायक
66	दोन संख्यांचे गुणोत्तर 3:4 आहे आणि त्यांचा मसावी 5 आहे. त्यांचा लसावी? The ratio of two numbers is 3:4 and their HCF is 5. Their LCM is? دو نمبروں کا تناسب 4: 3 ہے اور ان کے ایچ سی ایف 5 ہے۔ان کے ایل سی ایم کیا ہے؟	
	A.10 A.10 A.10	
	B.60 B.60 B.60	
	C.15 C.15 C.15	
	D.12 D.12 D.12	
Answer:	B.60 B.60 B.60	
67	Choose the word which is opposite in meaning to the given word. ABUNDANCE	
	A.Scarcity	
	B.Surplus	

C.Huge

D.Immense

Answer: A.Scarcity

68 रक्त शरीराच्या आतमध्ये गोठत नाही, याच्या दाबामुळे –

Blood does not coagulate inside the body due to the presence of –

_____ کی موجودگی کی وجہ سے خون جسم میں جمتا نہیں ہے۔

A.हिमोग्लोबिन
A.Hemoglobin
A.ہیموگلوبن

B.फिब्रिन
B.Fibrin
B.فائبرین

C.प्लाझ्मा
C.Plasma
C.پلازما

D.हेपारिन
D.Heparin
D.ہیپرین

Answer: D.हेपारिन
D.Heparin
D.ہیپرین

69 जर R:S=10:8 असेल तर $R^2:S^2$ चे मूल्य शोधा.

If R:S=10:8, then find the value of $R^2:S^2$?

اگر R:S=10:8 تو پھر $R^2:S^2$ کی قدر معلوم کریں؟

A.25:16
A.25:16
A.25:16

B.64:10
B.64:10
B.64:10

C.20:16
C.20:16
C.20:16

D.16:20
D.16:20
D.16:20

Answer: A.25:16
A.25:16
A.25:16

70 **सूचना:** खालील प्रश्नात एक उघडलेला फासा दाखविला आहे. उत्तराच्या पर्यायांपैकी कोणता पर्याय 3 या चिन्हाच्या विरुद्ध बाजूला येईल?

DIRECTIONS: In the following question an unfolded dice is given. From the given alternatives which of the following will be opposite of 3?

ہدایات: مندرجہ ذیل سوال میں ایک کھلا ہوا ڈبہ دیا گیا ہے- دئے گئے متبادلات میں مندرجہ ذیل میں سے کون 3 کے بر عکس ہوگا؟

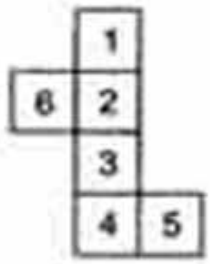

A. 1

B. 2

C. 4

D. 5

Answer: A. 1

71	रु. 25 हे रु. 1000 चे किती टक्के आहेत? What percent is Rs. 25 of Rs.1000? 25۔ روپئے 1000 وپئے کا کتنا فیصد ہے
	A.3.5% A.3.5% A.3.5%
	B.1.35% B.1.35% B.1.35%
	C.2.5% C.2.5% C.2.5%
	D.3.5% D.3.5% D.3.5%
Answer:	C.2.5% C.2.5% C.2.5%
72	4495 ÷ 145 x 656 ÷ 16 = ? 4495 ÷ 145 x 656 ÷ 16 = ? 4495 ÷ 145 x 656 ÷ 16 = ?

	A.1312 A.1312 A.1312
	B.72 B.72 B.72
	C.1271 C.1271 C.1271
	D.1372 D.1372 D.1372
Answer:	C.1271 C.1271 C.1271

73	‘ उदात्त ‘ या शब्दाचा समानार्थी शब्द कोणता ?
	A.अनुदात्त
	B.हलके
	C.उदार
	D.अनुदार
Answer:	C.उदार

74 कळीची (मुख्य) आकृती घड्याळाच्या दिशेने किंवा विरुद्ध दिशेने (दिशादर्शक बाण दर्शवितो आहे त्याप्रमाणे) 90° फिरविली. दिलेल्या चार पर्यायी आकृत्यांमधील कोणती आकृती या फिरविलेल्या कळीच्या आकृतीचे प्रतिनिधित्व करते आहे?

When the key figure is rotated one step clockwise OR anticlockwise (depending upon the direction of arrow shown), which of the Answer figures given will represent the main figure in the rotated form?

ہدایت: جب کسی مخصوص تصویر کو گھڑی کی چال کی سمت میں یا گھڑی کی چال کی الٹی سمت میں (گھڑی کی سمت کی طرف اشارہ کرنے والے تیر پر منحصر) ایک قدم گھمایا جاتا ہے، تو دئے گئے جواب کی تصاویر میں سے کون خاص تصویر میں گھمانی گئی شکل کی نمائندگی کریگا؟

मुख्य आकृती
Main Figure
خاص تصویر

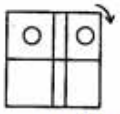

उत्तरासाठी पर्यायी आकृत्या
Answer Figure
جواب کی تصویر

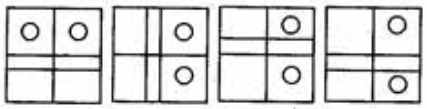

A. (A)

B. (B)

C. (C)

D. (D)

Answer: D. (D)

75 सामान्य गतीच्या 3/4 चालून तन्वीला सामान्य वेळेपेक्षा 2 तास जास्त वेळ लागतो. तिचा सामान्य वेळ काढा?

Walking at 3/4 of her normal speed Tanvi takes 2 hours more than the normal time. What is her normal time?

معمول کی رفتار کے 3/4 کے بقدر رفتارسے چلنے پر تنوی معمول کے وقت کے مقابلے میں 2 گھنٹے زیادہ لگاتی ہے۔ اس کا عام وقت کیا ہے؟

A.2 तास
A.2 hour
A.2 گھنٹے

B.5 तास
B.5 hour
B.5 گھنٹے

C.6 तास
C.6 hour
C.6 گھنٹے

D.8 तास
D.8 hour
D.8 گھنٹے

Answer: C.6 तास
C.6 hour
C.6 گھنٹے

76

सूचना: खालील प्रश्नात उत्तरातील पर्यायांपैकी कोणत्या पर्यायी आकृतीत प्रश्नातील आकृती अंतर्भूत आहे?

DIRECTIONS: In the given question find the answer figure in which question figure is embedded.

ہدایات: دئے گئے سوال میں جواب کی اس تصویر کو تلاش کریں جس میں سوالات کی تصویرمنسلک ہے۔

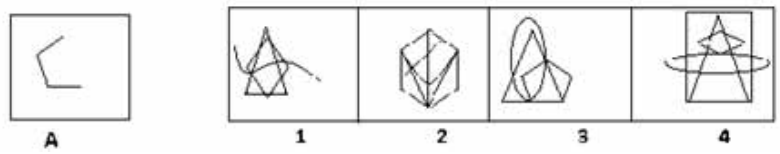

A. (A)

B. (B)

C. (C)

D. (D)

Answer: C. (C)

77

$\sqrt{4624} = ?$

A. 24

B. 23

C. 68

D. 75

Answer: C. 68

78 भारतामध्ये किती अधिकृत मान्यतेच्या भाषा आहेत?

How many officially recognized languages does India have?

بھارت میں کتنی زبانیں قانونی طور پر تسلیم شدہ ہیں۔

A.21
A.21
A.21

B.22
B.22
B.22

C.23
C.23
C.23

D.24
D.24
D.24

Answer: B.22
B.22
B.22

79 सूचना: यांपैकी प्रत्येक प्रश्नात अक्षरे, शब्द किंवा संख्यांचे चार समूह देण्यात आलेले आहेत.

त्यांपैकी वेगळे ते निवडा.

DIRECTIONS: In each of the questions, four groups of letters, words or numbers are given.

Find the odd one out.

سمت: ہر سوال میں، حروف، الفاظ یا اعداد کے چار گروپ دیے گئے ہیں۔
بے جوڑ کو تلاش کریں۔

A.4 9 8 5
A.4 9 8 5
A.4 9 8 5

B.8 6 8 4
B.8 6 8 4
B.8 6 8 4

C.5 6 3 4
C.5 6 3 4
C.5 6 3 4

D.7 7 3 9
D.7 7 3 9
D.7 7 3 9

Answer: C.5 6 3 4
C.5 6 3 4
C.5 6 3 4

80 सकाळी 9:00 वाजल्यापासून ते संध्याकाळी 4:00 वाजेपर्यंत घड्याळाचा मिनिट काटा किती वेळा तास काट्यावर येईल?

How many times, the minute hand of a clock overlaps with the hour hand from 9:00 a.m. to 4:00 p.m. in a day?

کتنی بار، منٹ کی سوئی دن میں صبح 9:00 بجے سے شام 4:00 بجے تک گھنٹے کی سوئی کو پار کرتی ہے؟

A.5
A.5
A.5

B.6
B.6
B.6

C.7
C.7
C.7

D.8
D.8
D.8

Answer: B.6
B.6
B.6

81 कोणत्या प्रकारच्या शैवालामध्ये क्लोरोफिल असतो?

Which types of algae possess chlorophyll?

کسی قسم کے الجی پودے میں کلوروفائل ہوتا ہے؟

A.हिरव्या
A.Green
A.ہرا

B.लाल
B.Red
B.لال

C.कथ्या
C.Brown
C.بھورا

D.वरील सर्व
D.All of the above
D.ان میں سے سبھی

Answer: D.वरील सर्व
D.All of the above
D.ان میں سے سبھی

82 शारीरिक तक्रारी किंवा अपंग कोणत्याही स्पष्ट / ओळखण्यायोग्य जैविक कारणांशिवाय ओळखले जाते.

Physical complaints or disabilities without any obvious/identifiable organic cause is known as

جسمانی شکایات یا معذوری کے بغیر کسی واضح / شناختی نامیاتی وجہ کے طور پر جانا جاتا ہے

A.सोमाटोफार्म विकार
A.Somatoform disorder
A.سومٹوف خرابی کی شکایت

B.छिन्नमानसिक रूग्ण
B.Schizophrenic
B.شائفوروفریک

C.भीती
C.Phobia
C. فوبیا

D. मनोदशा विकार
D.Mood disorder
D.موڈ خرابی کی شکایت

Answer: A.सोमाटोफार्म विकार
A.Somatoform disorder
A.سومٹوف خرابی کی شکایت

83 समुद्री जीवनासाठी आहारचा प्राथमिक स्रोत काय आहे?

What is the primary source of food for marine life?

سمندری زندگی میں کھانے کے بنیادی ذرائع کیا ہے؟

A.पादक प्लवक
A.Phytoplankton
A.فائٹوپلینکٹن

B.झूप्लँक्टन
B.Zooplankton
B.زو پلینکٹن

C.समुद्री वळू
C.Sea weeds
C.سمندری ویڈ

D.गवत
D.Grass
D.گھاس

Answer: A.पादक प्लवक
A.Phytoplankton
A.فائٹوپلینکٹن

84 3 वर्षांसाठी 5% व्याज दराने रू. 1000 मुद्दलीवरील आणि 4 वर्षांसाठी 4% प्रति वर्ष दराने त्याच मुद्दलीवर सरळ व्याज यांमधील फरक काय असेल?

What is the difference between the S.I. on a principal of Rs.1000 being calculated at 5% per annum for 3 years and on the same principal 4% per annum for 4 years?

1000 روپیہ اصل پر سود مفرد 3 سال کے لیئے 5٪ کی در سے شمار کیا جاتاہے اور اسی اصل پر 4 سال کے لیئے 4٪ کی در سے سود مفرد کے درمیان کیا فرق ہے ؟

A.रू. 10
A.Rs.10
A. 10 روپیہ

B.रू. 20
B.Rs.20
B. 20 روپیہ

C.रू. 30
C.Rs.30
C. 30 روپیہ

D.रू. 40
D.Rs.40
D. 40 روپیہ

Answer: A.रू. 10
A.Rs.10
A. 10 روپیہ

85 दिलेल्या शब्दामधून खालीलपैकी कोणता शब्द तयार केला जाऊ शकतो?
GLAZE

Which of the following word can be formed from the given word?
GLAZE

دیےگیے لفظ سے مندرجہ ذیل الفاظ میں سے کونسا بنایا جاسکتا ہے؟
‘GLAZE’

A.GLAD
A.GLAD
A.GLAD

B.LAZY
B.LAZY
B.LAZY

C.LEASE
C.LEASE
C.LEASE

D.ZEAL
D.ZEAL
D.ZEAL

Answer: D.ZEAL
D.ZEAL
D.ZEAL

86 सामी हा आठव्या वर्गातील विद्यार्थी नियमितपणे धार्मिक कार्यक्रमांना हजेरी लावतो आणि नियमित प्रार्थना करतो कारण त्याची वडीलधारी मंडळी त्याने तसे करावे असे म्हणतात, तर सामी नैतिक तर्क करण्याच्या कोणत्या टप्प्यात आहे.

Sami a student of class VIII regularly attends religious ceremonies and prays regularly because his elders says he should which stage of moral reasoning is Semi.

سمیع 8ویں درجہ کا طالب علم ہے باقاعدگی سے کلاس جاتا ہے، مذہبی فرائض انجام دیتا ہے اور باقاعدگی سے نماز پڑھتا ہے کیونکہ ان کے بڑے کہتے ہیں کہ انہیں یہ کرنا چاہئے ایسے میں سمیع کس اخلاقی مرحلہ میں ہے۔

A.रूढी-पूर्व
A.Preconvention
A.پیش بینی مرحلہ

B.परंपरागत
B.conventional
B.روایتی

C.रूढी-पश्चात
C.post conventional
C.مابعد رسمی

D.काहीही निष्कर्ष काढण्यासाठी माहिती अपुरी आहे
D.too little information to say anything
D.اس کے بارے میں بتانے کے لئے بہت کم

Answer: B.परंपरागत
B.conventional
B.روایتی

87 भाज्या त्यांच्यातील या उच्च घटकामुळे सहजपणे नाशवंत असतात

Vegetables are easily perishable because of their high content of

سبزیوں میں زیادہ مقدار میں _____ہونے کی وجہ سے آسانی سے خراب ہو جاتی ہیں۔

A.शर्करा
A.Sugars
A.سوگر

B.पाणी
B.Water
B.پانی

C.जीवनसत्व
C.Vitamins
C.وٹامن

D.एन्झाईम
D.Enzymes
D.انزائم

Answer:
B.पाणी
B.Water
B.پانی

88 सूचना: अर्थपूर्ण परिच्छेद निर्माण करण्यासाठी, खाली दिलेली (P), (Q) (R), (S) आणि (T) ही पाच वाक्ये योग्य अनुक्रमाने पुनर्रचना करा; त्यांनतर खालील प्रश्नांची उत्तर द्या.

P. बऱ्याच कल्पना मांडल्या गेल्या पण मांजरावर मात करता येईल अशी एकही दिसली नाही.
Q. यासाठी, म्हाताऱ्या आणि ज्ञानी उंदराने विचारले "ते ठीक आहे.
R. त्यांचा सामान्य दुश्मन मांजराने निर्माण केलेल्या संकटावर चर्चा करण्यासाठी उंदरांनी सभा भरविली.
S. "पण मांजराच्या गळ्यात घंटा बांधणार कोण ?"
T. तेव्हा एका तरुण उंदराने सुचविले कि, मांजराच्या गळ्यात घंटा बांधल्यास जेव्हा ते येईल तेव्हा कळेल आणि धूर्त मांजराच्या हल्ल्यातून बचाव होईल.

पुनर्रचना केल्यानंतर खालीलपैकी कोणते वाक्य पहिले असेल?

DIRECTION: Rearrange the following five sentences (P), (Q), (R), (S) and (T) in the proper sequence to form a meaningful paragraph; then answer the questions given below them.
P. Lots of ideas were shared, but none seemed good enough to beat the cat.
Q. To this, an old, wise mouse asked, “That’s fine.
R. A horde of mice gathered one night to discuss the problems created by their common enemy, the cat.
S. But who will bell the cat?”
T. Then a young mouse suggested that they should tie a bell around the cat’s neck to know when it is approaching and escape the sly cat’s attacks.

Which of the following should be the FIRST sentence after rearrangement?

ہدایات: ان پانچ جملوں (P)، (Q)، (R)، (S) اور (T) کو با معنی پیرا بنانے کے لئے دوبارہ ترتیب دیجئے، پھر نیچے دے گئے سوالوں کے جواب دیجئے

P. بہت ساری راے دی گی، لیکن کوئی بھی اچھی نہیں تھی جو بللی کو ہرا سکھے.
Q. اس پر، ایک بوڑھے ،اکل مند چنھے نے کہا،" یے ٹھیک ہے.
R. ایک رات چنہو کی جماعت انکے یکسا دشمن ،بللی کی طرف سے کی جانے والی مشکلات کے بھارے میں گفتگو کرنے کے لئے جمہ ہو گئے.
S. لیکن بللی کی گھنٹی کون بجاےگا.
T. پھر ایک چھوٹے چونھے نے صلہ دی کہ یہ جاننے کے لئے کہ بللی کب آرہی ہے اور چھپنے کے لئے وو بللی کی گردن میں گھنٹی باندیگے.

دوبارہ ترییب دینے کے بعد کون سا جملہ پہلے ہونا چاہیے؟

A.R
A.R
A.R

B.P
B.P
B.P

C.Q
C.Q
C.Q

D.T
D.T
D.T

Answer: A.R
A.R
A.R

89 खालीलपैकी सर्वांत मोठा अपूर्णांक शोधा

Find the largest among the following fraction

مندرجہ ذیل کسور میں سے سب سے بڑی کسر تلاش کریں

A.74/151
A.74/151
A.74/151

B.167/426
B.167/426
B.167/426

C.334/537
C.334/537
C.334/537

D.1011/1597
D.1011/1597
D.1011/1597

Answer: D.1011/1597
D.1011/1597
D.1011/1597

90 शिकाऊ म्हणून झालेले मानसिक बदल यामुळे आपणास गोष्टी समजणे किंवा समजून घेण्यास नवीन मार्ग सापडतात-

The mental changes involved as the learner acquires new ways of perceiving or apprehending the things are referred to as—

جب کوئی سیکھنے والا سمجھنے یا چیزوں کو روکنے کے نئے طریقےحاصل کرتا ہے تو ذہنی تبدیلیاں ان کوشامل ہوتی ہیں.

A.आकलनात्मक
A.Cognitive
A.کوگنیٹو

B.भावनात्मक
B.Affective
B.مؤثر

C.तुलनात्मक
C.Conative
C.کنیٹو

D.तांत्रिक
D.Tautological
D.طوازی

Answer: A.आकलनात्मक
A.Cognitive
A.کوگنیٹو

91 A sentence with an underlined idiomatic expression is given. What is the meaning of the idiomatic expression 'To have a green thumb' in the sentence given below?
My mother has a green thumb when it comes to houseplants.

A.To be good at gardening and making plants grow well

B.To eat a lot of fruits and vegetables

C.To have a dislike for plants and trees

D.None of the above

Answer: A.To be good at gardening and making plants grow well

For More Info And Videos About TAIT-Exam Syllabus And Other Exam Visit My Channel
TAIT च्या 30 प्रश्नपत्रिका PDF
BADSHAHimp Available Request 9765226781
WWW.YouTube.com/BADSHAHimp
Subscribe My Channel

92	DIRECTIONS: A sentence with an underlined word is given below. Find the Word which is most similar in meaning to the underlined word. Fragile items such as glass and china should be kept out of reach of children.
	A.Breakable
	B.Tough
	C.Resistant
	D.Costly
Answer:	A.Breakable

93	प्रश्नासाठी सूचना: खालील मालिका पूर्ण करा. A1, B4, C9, _____, E25 DIRECTION: Complete the following series. A1, B4, C9, _____, E25 سوال کے لیے ہدایت:مندرجہ ذیل سیریز کو مکمل کریں۔ A1, B4, C9, _____, E25
	A.D12 A.D12 A.D12
	B.D18 B.D18 B.D18
	C.D16 C.D16 C.D16
	D.D15 D.D15 D.D15
Answer:	C.D16 C.D16 C.D16

For More Info And Videos About TAIT-Exam Syllabus And Other Exam Visit My Channel
TAIT च्या 30 प्रश्नपत्रिका PDF
BADSHAHimp Available Request 9765226781
WWW.YouTube.com/BADSHAHimp
Subscribe My Channel

94 निर्देश: खालील व्यवस्था काळजीपूर्वक वाचा आणि खाली दिलेल्या प्रश्नांची उत्तरे द्या.

4 K % R T 3 E P # A 7 B 9 D I Q @ 2 8 V U © H J 5 F 1 % 6 M W

उपरोक्त व्यवस्थेत अशे किती व्यंजने आहेत, जे संखे आधी येतात पण त्या नंतर अक्षर येत नाही?

DIRECTIONS: Study the following arrangement carefully and answer the questions given below.

4 K % R T 3 E P # A 7 B 9 D I Q @ 2 8 V U © H J 5 F 1 % 6 M W

How many such consonants are there in the above arrangement, each of which is immediately preceded by a number but not immediately followed by a letter?

ہدایت نیچے دی گی ترتیب کو پڑھئے اور سہی جواب دیجئے

4 K % R T 3 E P # A 7 B 9 D I Q @ 2 8 V U © H J 5 F 1 % 6 M W

ااپری ترتیب میں کتنے کونسونانٹس ہیں، جنکے پیچھے کوئی نمبر آتا ہیں مگر کوئی حرف نہیں ؟

A.एक
A.One
A.ایک

B.दोन
B.Two
B.دو

C.तीन
C.Three
C.تین

D.चार
D.Four
D.چار

Answer: C.तीन
C.Three
C.تین

For More Info And Videos About TAIT-Exam Syllabus And Other Exam Visit My Channel
TAIT च्या 30 प्रश्नपत्रिका PDF
BADSHAHimp Available Request 9765226781
YouTube WWW.YouTube.com/BADSHAHimp
Subscribe My Channel

95 रामचे वय त्याच्या वडीलांच्या वयाच्या अर्धे आहे. 20 वर्षांपूर्वी, रामच्या वडीलांचे वय त्यांच्या मुलाच्या वयाच्या 6 पट होते. सध्या राम आणि त्याच्या वडीलांच्या वयांमधील फरक काय आहे?

Ram is half the age of his father. 20 years ago, Ram's father was 6 times of his son's age. What is the difference between ages of Ram and his father at present?

رام کی عمر اُس کے والد کی عمر کے آدھی ہے۔20 سال پہلے، رام کے والد کی عمر بیٹے کی عمر کے 6 گنا تھی۔رام اور کے والد کی موجودہ عمر میں کتنا فرق ہے؟

A.25
A.25
A.25

B.15
B.15
B.15

C.30
C.30
C.30

D.50
D.50
D.50

Answer: A.25
A.25
A.25

96 हे फ्युचर ग्रुपचे संस्थापक _____ आहे

The founder of Future group is –

فیوچر گروپ کی بنیاد رکھی۔

A.सचिन बंसल
A.Sachin Bansal
A.سچن بنسل نے

B.किशोर बियानी
B.Kishore Biyani
B.کشور بیانی نے

C.सुनिल भारती मित्तल
C.Sunil Bharti Mittal
C.سنیل بھارتی متل نے

For More Info And Videos About TAIT-Exam Syllabus And Other Exam Visit My Channel
TAIT च्या 30 प्रश्नपत्रिका PDF
BADSHAHimp Available Request 9765226781
WWW.YouTube.com/BADSHAHimp
Subscribe My Channel

	D.एस. के. बर्मन D.S.K. Burman D.ایس کے برمن نے
Answer:	B.किशोर बियानी B.Kishore Biyani B.کشور بیانی نے

97 सूचना: खालील प्रत्येक प्रश्नात, दोन किंवा तीन विधाने दिली आहेत, ज्यांच्यानंतर चार निष्कर्ष आहेत ज्यांना I, II, III आणि IV अंक दिले आहेत. सर्वसामान्यपणे ज्ञात असलेल्या तथ्यांशी विसंगती आढळत असली तरीही, हे सत्य असल्याचे तात्पुरते मानून, दिलेले कोणते निष्कर्ष तर्कशुद्धपणे दिलेल्या विधानांचे अनुसरण करतात ते ठरवा .
विधाने :
काही मोठे लहान असतात.
कोणताही लहान विशाल नसतो.
काही विशाल सूक्षम असतात.
निष्कर्ष:
I. काही विशाल मोठे नसतात.
II. कोणताही मोठा विशाल असतो.
III. काही लहान सूक्ष्म नसतात.
IV काही मोठे सूक्ष्म नसतात.

DIRECTION: In each of the questions below, there are two or three statements followed by four conclusions numbered I, II, III and IV. You have to take the given statements to be true even if they seem to be at variance with commonly known facts and then decide which of the given conclusions logically follow(s) from the given statements.

Statements:
Some big are small.
No small is large.
Some large are tiny.

Conclusions:
I. Some large are not big.
II. No big is large.
III. Some small are not tiny.
IV Some big are not tiny.

ہدایت:مندرجہ ذیل سوالات میں سے ہر ایک میں، دو یا تین بیانات دیے گئے ہیں جن کے بعد چار نتائج نمبر I، II، III اور IV دیے گئے ہیں۔ آپ کو دیے گئے بیانات کو درست تسلیم کرنا ہے اگرچہ وہ عام طور پر معلوم حقائق کے برعکس نظر آتے ہوں اور پھر فیصلہ کریں کہ دیے گئے نتائج میں سے کون منطقی طور پر دیے گئے بیانات کی پیروی کرتے ہیں۔

بیانات:
کچھ بڑے چھوٹے ہیں۔
کچھ چھوٹے بھاری ہیں۔
کچھ بھاری معمولی ہیں۔

حل:
I. کچھ بھاری بڑے نہیں ہیں۔
II. کوئی بڑا بھاری نہیں ہے۔
III. کچھ چھوٹے معمولی نہیں ہیں۔
IV. کچھ بڑے معمولی نہیں ہیں۔

A.केवळ निष्कर्ष I निघत असल्यास.
A.Only I follows
A.صرف I پیروی کرتا ہے

B.केवळ निष्कर्ष II निघत असल्यास.
B.Only II follows
B.صرف II پیروی کرتا ہے

C.केवळ निष्कर्ष III निघत असल्यास.
C.Only III follows
C.صرف III پیروی کرتا ہے

D.कोणतेही निष्कर्ष निघत नसल्यास.
D.None follows
D.کوئی پیروی نہیں کرتا ہے

Answer: D.कोणतेही निष्कर्ष निघत नसल्यास.
D.None follows
D.کوئی پیروی نہیں کرتا ہے

98 विधान:
कंपनी 'बी'ने राष्ट्रीय महामार्ग 25 विकसित करण्याच्या प्रकल्पाची योजना बनवायची आहे. संबंधित मंत्री यांनी 12 टक्के कमिशन मागविले आहे.

कृतीचा कोर्स:
I. प्रकल्प मंजूर करण्यासाठी 12 टक्के कमिशन म्हणून कंपनीने स्वीकार करणे सामान्य आहे.
II. प्रकल्प मंजूर करण्यासाठी 12 टक्के कमिशन म्हणून कंपनीने गोंधळ करणे वरील बाजूवर आहे.

Statement:
Company B wants to take a project for developing National Highway 25. The concerned Minister has asked for 12 percent commission.
Course of actions:
I. The company should accept as 12 percent commission for sanctioning project is normal.
II. The company should haggle as 12 percent commission for sanctioning project is on the higher side.

بیان:
کمپنی نیشنل ہائی وے 25 کی ترقی کا پراجیکٹ لینا چاہتی ہے۔ متعلقہ وزیر نے 12 فیصد کمیشن کا مطالبہ کیا ہے۔ B

لائحہ عمل:
I۔کمپنی کو قبول کر لینا چاہیے کیونکہ پراجیکٹ کی منظوری کے لیے 12 فیصد کمیشن عام ہے۔
II۔ کمپنی کو سودے بازی کرنی چاہیے کیونکہ پراجیکٹ کی منظوری کے لیے 12 فیصد کمیشن زیادہ ہے۔

A.फक्त I अनुसरून आहे
A.Only I follows
A. صرف I لاگو ہو گا۔

B.फक्त II अनुसरण करते आहे
B.Only II follows
B. صرف II لاگو ہو گا۔

C.एकतर I किंवा II अनुसरून आहे
C.Either I or II follows
C. I یا II میں سے ایک لاگو ہو گا۔

D.I किंवा II दोन्हीपैकी काहीही अनुसरण करत नाही
D.Neither I nor II follows
D. I اور II میں سے کوئی بھی لاگو نہیں ہو گا۔

Answer: D.I किंवा II दोन्हीपैकी काहीही अनुसरण करत नाही
D.Neither I nor II follows
D. I اور II میں سے کوئی بھی لاگو نہیں ہو گا۔

99 Out of the four alternatives, choose the one which can be substituted for the given words/sentence.
A partial or total loss of memory

A.Amnesia

B.Xenophobia

C.Claustrophobia

D.Nostalgia

Answer: A.Amnesia

100 अनुक्रम 60, 120, 180,..... चे 10वे पद शोधा

Find the 10th term of the sequence: 60, 120, 180,.....

180 ,120 ,60 :؟اس سرج کیدسوی ٹرم کیا ہے,.....

A.600
A.600
A.600

B.640
B.640
B.640

C.680
C.680
C.680

D.700
D.700
D.700

Answer: A.600
A.600
A.600

101 दूधाच्या कंटेनरमधून, चोराने 24 लिटर्स दूध चोरले आणि त्याच्या जागी तेवढ्याच प्रमाणात पाणी घातले. त्याने हिच प्रक्रिया पुन्हा केली. त्यामुळे तीन प्रयत्नांमध्ये दूध आणि पाण्याचे प्रमाण 125:604 झाले. सुरूवातीला कंटेनरमधील दूधाचे प्रमाण:

From a container of Milk, a thief has stolen 24 liters of milk and replaced it with same quantity of water. He again repeated the same process. Thus in three attempts, the ratio of Milk and water became 125:604. The initial amount of Milk in the container was:

دودھ کے ایک کنٹینر سے، چور نے 24 لیٹر دودھ چوری کیا اور اسی مقدار میں پانی ڈال دیا. پھر اس نے دوبارہ یہی عمل کو دوبارہ کیا. اس طرح تین مرتبہ میں، دودھ اور پانی کا تناسب 125: 604 بن گیا. کنٹینر میں دودھ کی ابتدائی مقدار یہ تھی

A.57 लिटर्स
A.57 litres
A.57 لیٹر

B.52 लिटर्स
B.52 litres
B.52 لیٹر

C.62 लिटर्स
C.62 litres
C.62 لیٹر

D.54 लिटर्स
D.54 litres
D.54 لیٹر

Answer: D.54 लिटर्स
D.54 litres
D.54 لیٹر

102 अशी स्थिती ज्यामध्ये विचार किंवा कल्पना एकमेकांच्या तर्किकदृष्ट्या एकसमान असतात

A state in which thoughts or ideas are logically in line with each other

ایسی صورتِ حال جس میں خیالات یا آئیڈیاز ایک ساتھ ایک ہی لائن میں رہتے ہیں _____ کہلاتی ہے۔

A.आपसातील सुसंगतपणा
A.Mutual consistency
A.باہمی بستگی

B.मनोवृत्ती बदल
B.Attitude change
B.متبدل ذہنی رویہ

C.बोधात्मक सुसंगतपणा
C.Cognitive consistency
C.وجدانی بستگی(Cognitive consistency)

D.बोधात्मक अभिक्षमता
D.Cognitive aptitude
D.وجدانی موزونیت

Answer: C.बोधात्मक सुसंगतपणा
C.Cognitive consistency
C.وجدانی بستگی(Cognitive consistency)

103 DIRECTIONS: A sentence with an underlined word is given below. Find the word which is opposite in meaning to the underlined word from the given options.
We were overcome by fatigue after the long journey.

A.Energy

B.Tiredness

C.Weariness

D.Exhaustion

Answer: A.Energy

104 सूचना: खालील दिलेल्या प्रश्नामध्ये काही विधाने आणि काही निष्कर्ष आहेत. सामन्यात: ज्ञात तथ्यांपेक्षा ते वेगळे असतील तर दिलेली विधाने तुम्हाला सत्य मानवी लागतील आणि त्यानंतर दिलेल्या विधानाचे अनुकरण दिलेल्यापैकी कोणता निष्कर्ष तार्किकदृष्ट्या करतो ते ठरवा.

विधाने:
R = S ≥ T > V
निष्कर्ष:
I. S> V
II. T < R

DIRECTIONS: In the question given below, there are few statements followed by few conclusions. You have to take the given statements to be true even if they seem to be at variance with commonly known facts and then decide which of the given conclusion logically follow(s) from the given statements.

Statements:
R = S ≥ T > V
Conclusions:
I. S > V
II. T < R

ہدایات: مندرجہ ذیل سوال میں، کچھ بیانات کے بعد کچھ نتائج موجود ہیں. اگر آپ کو عام طور پر جانے جاتے حقائق کے ساتھ بھی متغیر ہونے لگے تو بھی آپ دئے گئے بیانات دماغ میں رکھیں اور پھر اس بات کا فیصلہ کریں کہ ذیل میں دیا گیا کونسا نتیجہ منطقانہ طور پر دیے گئے بیانات کی پیروی کرتا ہے.

بیانات:
R = S ≥ T > V
نتائج:
S > V .I
T < R .II

A.तर फक्त I निष्कर्ष खरा आहे
A.If only Conclusion I is true
A.اگر صرف I نتیجہ درست ہے

B.तर फक्त II निष्कर्ष खरा आहे
B.If only Conclusion II is true
B.اگر صرف نتیجہ II درست ہے

C. तर I किंवा II यापैकी एक निष्कर्ष खरा आहे
C.If either Conclusion I or II is true
C.اگر I اور II نتائج میں سے ایک درست ہے

D. तर I व II हे दोन्हीही निष्कर्ष खरे नाहीत
D.If neither Conclusion I nor II is true
D.اگر I اور II نتائج میں سے کوئی بھی درست نہیں

Answer: A.तर फक्त I निष्कर्ष खरा आहे
A.If only Conclusion I is true
A.اگر صرف I نتیجہ درست ہے

105 सूचना: खाली दिलेल्या विधान (A) आणि कारण (R) साठी, खालील पैकी योग्य पर्याय निवडा:

विधान (A): 1957 मध्ये पहिले भारत-पाकिस्तान युद्ध लढले गेले.
कारण (R): भारताने पाकिस्तानावर आक्रमण केले.

DIRECTION: For the Assertion (A) and Reason (R) given below, choose the correct alternative from the following:

Assertion (A): First Indo Pak war was fought in 1957.
Reason (R): India invaded Pakistan.

ہدایت: نیچے دئیے گئے اسرشن (A) اور وجہ (R) کے لئے، مندرجہ ذیل میں سے صحیح متبادل منتخب کریں:

اسرشن (A): پہلی ہندوستان پاک جنگ 1957 میں لڑی گئی تھی۔
وجہ (R): ہندوستان نے پاکستان پر حملہ کیا تھا۔

A.दोन्ही (A) आणि (R) सत्य आहेत आणि (R) (A) च योग्य स्पष्टीकरण आहे
A.Both (A) and (R) are true and (R) is the correct explanation of (A)
A. (A) اور (R) دونوں صحیح ہیں اور (R) (A) کی درست وضاحت ہے

B.दोन्ही (A) आणि (R) खरे आहेत, परंतु (R) (A) च योग्य स्पष्टीकरण नाही
B.Both (A) and (R) are true, but (R) is not the correct explanation of (A)
B. (A) اور (R) دونوں صحیح ہیں، لیکن (R) (A) کی درست وضاحت نہیں ہے

C.(A) सत्य आहे, परंतु (R) खोटे आहे
C.(A) is true, but (R) is false
C. (A) صحیح ہے، لیکن (R) غلط ہے

D.दोन्ही (A) आणि (R) खोटे आहेत
D.Both (A) and (R) are false
D. (A) اور (R) دونوں غلط ہیں

Answer: D.दोन्ही (A) आणि (R) खोटे आहेत
D.Both (A) and (R) are false
D. (A) اور (R) دونوں غلط ہیں

106 दिलेल्या पर्यायांपैकी वेगळे ते निवडा:

Select the odd one out from the given options:

دیے گئے اختیارات میں سے بے جوڑ کو منتخب کریں:

A.जीभ
A.Tongue
A.زبان

B.नाक
B.Nose
B.ناک

C.डोळा
C.Eye
C.آنکھ

D.तोंड
D.Mouth
D.منہ

Answer: C.डोळा
C.Eye
C.آنکھ

107 राजकीय जबाबदारीची अनेक लोकांकडून अपेक्षा. शिक्षक पण पाहिजे-

Political responsibilities make demands upon many people. Teachers should—

سیاسی ذمہ داریاں بہت سے لوگوں سے مطالبہ کرتی ہیں.اساتذہ کو چاہیئے

A.राजकीय समस्यांवर ठाम भूमिका घ्या आणि कसल्याही परिस्थितीत त्यांच्या बाजूने राहा, ते असणार
A.Take a firm stand on political issue and support their side in any way, they can
A.سیاسی مسئلہ پر ایک مضبوط موقف لیں اور کسی بھی طرح اپنی طرف سے حمایت کریں، وہ کرسکتے ہیں

B.बाजू घेण्यास नकार द्या
B.Refuse to take a stand
B.ایک موقف اختیار کرنے سے انکار

C.नागरी जबाबदाऱ्या स्वीकारा, परंतु काही आंशिक विवादात न पडण्यास नकार द्या
C.Accept civic responsibilities, but refuse to be drawn into fractional disputes
C.شہری ذمہ داریاں قبول کرتے ہیں، لیکن جزوی تنازعات میں شریک ہونے سے انکار کرتے ہیں

D.वर्गात राजकारणाचा उल्लेख काढू नका
D.Never mention politics in class
D.کلاس میں سیاست کا ذکر کبھی نہ کریں

Answer: C.नागरी जबाबदाऱ्या स्वीकारा, परंतु काही आंशिक विवादात न पडण्यास नकार द्या
C.Accept civic responsibilities, but refuse to be drawn into fractional disputes
C.شہری ذمہ داریاں قبول کرتے ہیں، لیکن جزوی تنازعات میں شریک ہونے سے انکار کرتے ہیں

108 खालीलपैकी शुद्ध वाक्य कोणते ?

A.वाढणारी लोकसंख्या तोंडाला दोन हात घेऊन येते.

B.वाढणारी लोकसंख्या तोंडाजवळ दोन हात घेऊन येते.

C.वाढणारी लोकसंख्या तोंडाबरोबर दोन हात घेऊन येते.

D.वाढणारी लोकसंख्या तोंडात दोन हात घेऊन येते.

Answer: C.वाढणारी लोकसंख्या तोंडाबरोबर दोन हात घेऊन येते.

109 निर्देश: खालीदिलेल्या अक्षराच्या क्रमात काही अक्षरे गहाळ केली आहेत ते त्या क्रमाने खाली दिलेल्या पर्यायांपैकी एक आहे

e _ g _ ghig _ ijk _ i _ k _ m

DIRECTIONS: In each of the following letter series, same of the letters are missing which are given in that order as one of the alternatives below it.

e _ g _ ghig _ ijk _ i _ k _ m

دایت جیل کے حرف سرج میں کوئی حرف گمشدہ ہے آپکو انکی شناخت جیل کے اختیارات سے کرنی ہے

e _ g _ ghig _ ijk _ i _ k _ m

A.ffhhjl
A.ffhhjl
A.ffhhjl

B.ffhhjj
B.ffhhjj
B.ffhhjj

C.ffhhll
C.ffhhll
C.ffhhll

D.fhlfhl
D.fhlfhl
D.fhlfhl

Answer: A.ffhhjl
A.ffhhjl
A.ffhhjl

110 शिक्षकांच्या वैयक्तिक सामाजिक तडजोडी व त्यांचे वैवाहिक स्थिती यापैकी सर्वात अचूक विधान कोणते?

Which of the following is the most correct statement about the relation between marital status and the personal social adjustment of teachers?

شادی شدہ حیثیت اور اساتذہ کے ذاتی سماجی ایڈجسٹمنٹ کے درمیان تعلق کے بارے مینمندرجہ ذیل میں سے کونسا بیان درست ترین ہے؟

A.विवाहित शिक्षकांना प्रयोगात्मक पुरावा अनुकूल ठरतो
A.Empirical evidence favors the married teacher
A.تجرباتی ثبوت شادی شدہ استاد کےحق میں ہے

B.अविवाहित शिक्षकास प्रयोगात्मक पुरावा अनुकूल ठरतो
B.Empirical evidence favors the single teacher
B.تجرباتی ثبوت غیر شادی شدہ استاد کےحق مینہے

C.वैवाहिक स्थिती विवाहित पुरुष शिक्षकांना परंतु अविवाहित शिक्षिकांच्या बाबतीत अनुकूल ठरते
C.Marital status favors married male teachers but single female teachers
C.ازدواجی حیثیت شادی شدہ مرد استاد کے حق میں ہے لیکن غیر شادی شدہ خواتین اساتذہ کے حق میں بھی ہے

D.वैवाहिक स्थितीचे तोडजोडीशी काही एक संबंध नाही
D.Marital status bears no relation to adjustment
D.ازدواجی حیثیت کا ایڈجسٹمنٹ سے کوئی تعلق نہیں ہے

Answer: A.विवाहित शिक्षकांना प्रयोगात्मक पुरावा अनुकूल ठरतो
A.Empirical evidence favors the married teacher
A.تجرباتی ثبوت شادی شدہ استاد کےحق میں ہے

111

सूचना: खालील प्रश्नात उत्तरातील पर्यायांपैकी कोणत्या पर्यायी आकृतीत प्रश्नातील आकृती अंतर्भूत आहे?

DIRECTIONS: In the given question find the answer figure in which question figure is embedded.

ہدایات: دئے گئے سوال میں جواب کی اس تصویر کو تلاش کریں جس میں سوالات کی تصویرمنسلک ہے۔

प्रश्न आकृती
Question Figure
سوال کی تصویر

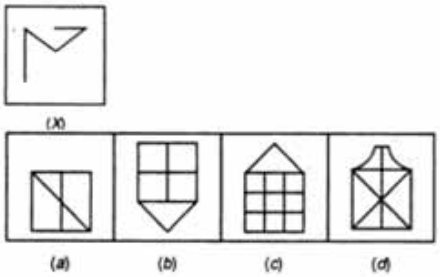

A. (A)

B. (B)

C. (C)

D. (D)

Answer: D. (D)

112 सूचना: प्रत्येक प्रश्नाला एक प्रमुख विधानासोबत चार विधाने आहेत ज्यांच्याखाली A, B, C आणि D असे चार विधान आहेत. क्रमवार विधानांची जोडी निवडा ज्यामध्ये प्रथम विधान दुसऱ्या विधानाला सुचवते, आणि दोन्ही विधाने तर्किकदृष्ट्या प्रमुख विधानासोबत निगडित असेल.

हा पेन एकतर निळा आहे किंवा काळा आहे.
A. पेन निळा आहे.
B. पेन निळा नाही.
C. पेन काळा आहे
D. पेन काळा नाही.

DIRECTIONS: Each question has a main statement followed by four statements labelled A, B, C and D. Choose the ordered pair of statements, where the first statement implies the second, and the two statements are logically consistent with the main statement.

The Pen is either blue or black .
A. The Pen is blue
B.The Pen is not blue
C.The Pen is black
D.The Pen is not black

ہدایت: ہر سوال میں ایک جملہ ہے جسکے بعد چار جملےاے، بی،سی اور ڈی کے نام سے دئے گئے ہیں اسمیں منسلک جوڑیوں کو چنئے۔ جہاں پہلا جملہ دوسرے جملہ کی اور اشارہ کر رہا ہے اور دو جملے منطقی مرکزی بیان کے مطابق ہیں

یہ پین یا نیلا ہے یا کالا
A۔ یہ پین نیلا ہے
B۔ یہ پین نیلا نہیں ہے
C۔ یہ پین کالا ہے
D۔ یہ پین کالا نہیں ہے

A.BD
A.BD
A.BD

B.DA
B.DA
B.DA

C.CB
C.CB
C.CB

D.AC
D.AC
D.AC

Answer: B.DA
B.DA
B.DA

113 P चे वडील Q चा मुलगा आहे. M हा P चा काका आहे आणि N हा Q चा भाऊ आहे. मग N चे M सोबत नाते काय?

P's father is Q's son. M is the paternal uncle of P and N is the brother of Q. How is N related to M?

P کا باپ Q کا بیٹا ہے. P M کا ماما ہے اور Q N کا بھائی ہے. N کا M سے کیا رشتہ ہے؟

A.चुलत भाऊ
A.Cousin
A.چچا زاد

B.भाऊ
B.Brother
B.بھائی

C.पुतण्या
C.Nephew
C.بتیجا

D.यापैकी काही नाही
D.None of these
D.ان میں سے کوئی نہیں

Answer: D.यापैकी काही नाही
D.None of these
D.ان میں سے کوئی نہیں

114 ‘ भागुबाई ‘ या शब्दाचा समानार्थी शब्द कोणता ?

A.पराक्रमी

B.पळपुटा

C.धाडसी

D.शूरवीर

Answer: B.पळपुटा

115 सूचना: या प्रत्येक प्रश्नांमध्ये तुम्हाला A आणि B अशी दोन विधाने दिलेली आहे आणि I आणि IIअसे दोन निष्कर्ष दिलेले आहेत. सामान्यपणे माहीत असलेल्या तथ्यांशी जुळत नसले तरी खालील दोन विधाने बरोबर आहेत असे समजा. खालीलपैकी कोणते निष्कर्ष दिलेल्या वाक्यांना संपूर्णपणे लागू आहे ते ठरवा.
निवेदन:
A: सर्व घोडे बैल आहेत.
B: सर्व बैल पोपट आहेत.
निष्कर्ष:
I: सर्व घोडे पोपट आहेत.
II: सर्व पोपट घोडे आहेत.

DIRECTION: In each of these questions, you are given two statements A and B followed by two conclusions (I) and (II). You have to take the two statements to be true even if they seem to be at variance from commonly known facts. You are to decide which of the given conclusions definitely follows from the given statements.

Statements:
A: All horses are bullocks.
B: All bullocks are parrots.

Conclusions:
I: All horses are parrots.
II: All parrots are horses.

ہدایت:ان سوالوں میں سے ہر ایک میں، آپ کو دو بیانات A اور B دیے گئے ہیں جن کے بعد دو نتائج (I) اور (II) دیے گئے ہیں۔ آپ کو دونوں بیانات کو درست تسلیم کرنا ہے اگرچہ وہ عام طور پر معلوم حقائق کے برعکس نظر آتے ہوں۔ آپ کو فیصلہ کرنا ہے کہ دیے گئے نتائج میں سے کون یقینی طور پر دیے گئے بیانات کی پیروی کرتا ہے۔

بیانات:
A: سبھی گھوڑے سانڈ ہیں۔
B: سبھی سانڈ طوطے ہیں۔

نتائج
I: سبھی گھوڑے طوطے ہیں۔
II. سبھی طوطے گھوڑے ہیں۔

A.जर केवळ निष्कर्ष I निघत असल्यास.
A.If only conclusion I follows
A.صرف نتیجہ I پیروی کرتا ہے۔

B.जर केवळ निष्कर्ष II निघत असल्यास.
B.If only conclusion II follows
B.صرف نتیجہ II پیروی کرتا ہے۔

C.जर दोन्ही निष्कर्ष I आणि II निघत असल्यास.
C.If both I and II follow
C.دونوں I اور II پیروی کرتے ہیں۔

D.जर दोन्ही निष्कर्ष I आणि II निघत नसल्यास.
D.If neither I nor II follows
D.پیروی کرتا ہے۔ II نہ ہی I نہ تو

Answer: A.जर केवळ निष्कर्ष I निघत असल्यास.
A.If only conclusion I follows
A.پیروی کرتا ہے۔ I صرف نتیجہ

116 खालीलपैकी अशुद्ध वाक्य कोणते ?

A.त्यांच्या डोळ्यात आनंदाश्रू तरळत होते.

B.सुलभाचे नाव घेताच ते सावरून बसले.

C.त्या दोघांची नजरानजर झाली.

D.एकमेकांची आपुलकीत चौकशी झाली.

Answer: D.एकमेकांची आपुलकीत चौकशी झाली.

117 व्यक्तीचे स्वत:बद्दलचे निर्धारण म्हणजे

The judgment of a person about himself/herself is

کسی شخص کا اپنے حق میں فیصلہ کرنا _____ کہلاتا ہے ۔

A.स्वाभिमान
A.Self–esteem
A.نفس پرستی، حبّ ذات

B.आत्म-सम्मान
B.self–respect
B.احترامِ نفس

C.आत्म–नियमन
C.Self–regulation
C.خود نظمی

D.आत्म–संकल्पना
D.Self–concept
D.(خود ارتکازی (سلف کنسپٹ

Answer: A.स्वाभिमान
A.Self–esteem
A.نفس پرستی، حبّ ذات

118 विद्यार्थ्यांच्या रांगेत, रमेश डावीकडून 12 व्या आणि उजवीकडून 17 व्या क्रमांकावर आहे. तर रांगेत एकूण विद्यार्थी किती ?

In a row of students, Ramesh in 12th from the left and is 17th from the right. How many students are there in the row?

بچھوں کی کتار میں، رمیش بھائیں سے 12 وہ اور کاشی دھانیں سے 17 وہ ہے. کتار میں کل کتنے بچھے ہے؟

A.28
A.28
A.28

B.12
B.12
B.12

C.7
C.7
C.7

D.10
D.10
D.10

Answer: A.28
A.28
A.28

119 Out of the given options, choose the one which is the correct active voice of the sentence given below.
The fields are being ploughed by the farmers.

A.The fields has been ploughed by the farmers.

B.The farmers has been ploughing the fields.

C.The farmers are ploughing the fields.

D.The farmers has ploughed the fields.

Answer: C.The farmers are ploughing the fields.

120	‘ हा पहिला वर्ग माझा.’ या वाक्यातील विशेषण ओळखा.
	A.हा
	B.पहिला
	C.वर्ग
	D.माझा
Answer:	B.पहिला

121	ताण प्रतिरोधक व्यक्तिमत्त्व याद्वारे उत्तम प्रकारे स्पष्ट होते Stress resistant personality is best explained by دباو جھیلنے والی شخصیت کی وضاحت سب سے اچھی کی گئی ہے بذریعہ
	A.कोबासा A.Kobasa A.کوباسا
	B.एरिक इरिकसन B.Erik Erickson B.اریک اریکسن
	C.रेयनाल्ड C.Reynauld C.رینالڈ
	D.वरीलपैकी कोणतेही नाही D.None of the above D.درج بالا میں سے کوئی نہیں
Answer:	A.कोबासा A.Kobasa A.کوباسا

122 सूचना: दिलेल्या माहितीचा काळजीपूर्वक अभ्यास करा आणि खालील प्रश्नांची उत्तरे द्या.
सात खेळ-फेन्सिंग, हॉकी, फुटबॉल, गोल्फ, लाँग जंप, टेबल फुटबॉल आणि अंडरवॉटर हॉकी लागोपाठ सात दिवस आयोजित केले जाणार आहेत (सोमवारपासून सुरु होऊन रविवारी समाप्त) पण ते याच क्रमात असतील असे नाही. एका दिवशी फक्त एक खेळ आयोजित केला जाईल. अंडरवॉटर हॉकीनंतर केवळ दोन खेळांचे आयोजन केले जाईल. टेबल फुटबॉल आणि अंडरवॉटर हॉकीच्या मध्ये केवळ दोन खेळ आयोजित केले जातील. हॉकी आणि लाँग जंपमध्ये केवळ तीन खेळ आयोजित केले जातील. हॉकीचे आयोजन रविवारी केले जाणार नाही. फेन्सिंग गोल्फ आणि फुटबॉलच्या आधी आयोजित केले जाईल (अगदी लगेचच आधी असेल असे नाही). फुटबॉल गोल्फनंतर आयोजित केला जाईल (अगदी लगेच नंतर असेल असे नाही).
कोणता खेळ सोमवारी आयोजित केला जाईल?

DIRECTIONS: Study the given information carefully and answer the given questions.
Seven plays-Fencing, Hockey, Football, Golf, Long jump, Table Football and Underwater Hockey are to be held on seven consecutive days (starting on Monday and ending on Sunday) not necessarily in the same order. Only one play can be held on one day. Only two plays will be held after Underwater Hockey . Only two plays will be held between Table Football and Underwater Hockey . Only three plays will be held between Hockey and Long jump. Hockey will not be held on Sunday. Fencing will be held before Golf and Football (not necessarily immediately before).Football will be held after Golf (not necessarily immediately after).
Which play will be held on Monday?

ہدایات: مندرجہ ذیل معلومات کو دھیان سے پڑھیں اور دیے گئے سوالوں کے جواب دیں۔
سات کھیل-فینسنگ، ہاکی، فٹ بال، گولف، لمبی چھلانگ، ٹیبل فٹ بال اور زیر آب ہاکی کو سات لگاتار دنوں میں منعقد کیا جانا ہے (پیر سے شروع ہو کر اور سنیچر میں ختم کرکے) جو ضروری نہیں ہے کہ یکساں ترتیب میں ہوں۔ ایک دن میں صرف ایک کھیل منعقد کیا جا سکتا ہے۔ زیر آب ہاکی کے بعد صرف دو کھیل منعقد ہوں گے۔ ٹیبل فٹ بال اور زیر آب ہاکی کے درمیان صرف دو کھیل منعقد ہوں گے۔ ہاکی اور لمبی چھلانگ کے درمیان صرف تین کھیل منعقد ہوں گے۔ ہاکی اتوار کو نہیں منعقد ہوگا۔ گولف اور فٹ بال سے پہلے فینسنگ کا انعقاد ہوگا (فوری پہلے ضروری نہیں ہے)۔ فٹ بال گولف کے بعد منعقد ہوگا (فوری بعد ضروری نہیں ہے)۔
پیر کو کون سا کھیل منعقد ہوگا؟

A.टेबल फुटबॉल
A.Table Football
A.ٹیبل فٹ بال

B.हॉकी
B.Hockey
B.ہاکی

C.लाँग जंप
C.Long jump
C.لمبی چھلانگ

D.फेन्सिंग
D.Fencing
D.تیغ زنی

Answer: D.फेन्सिंग
D.Fencing
D.تیغ زنی

123 कोणती वस्तुपुन्हावापरू शकत नाही?

Which item is not recyclable?

کس شے کو ریسائیکل نہیں کر سکتے؟

A.वृत्तपत्र
A.Newspaper
A. ایک اخبار

B.प्लास्टिक पिशव्या
B.Plastic bags
B. پلاسٹک بیگ

C.जुनी औषधे
C.Old medicines
C. پرانی ادویات

D.यापैकी एकही नाही
D.None of these
D. ان میں سے کوئی بھی نہیں

Answer: D.यापैकी एकही नाही
D.None of these
D. ان میں سے کوئی بھی نہیں

124 सर्वात कमी तापमान याने नोंदवले जाते -

The lowest temperature is recorded by -

کم سے کم درجہ حرارت _____ کے ذریعہ ریکارڈ کیا جاتا ہے۔

A.पारायुक्त थर्मामीटर
A.Mercurial thermometer
A.مرکریل تھرمومیٹر

B.किमान नोंदणीचे थर्मामीटर
B.Minimum reading thermometer
B.کم سے کم ریڈنگ تھرمومیٹر

C.अल्कोहोल थर्मामीटर
C.Alcohol thermometer
C.الکحل تھرمومیٹر

D.कमाल नोंदणीचे थर्मामीटर
D.Maximum reading thermometer
D.زیادہ سے زیادہ ریڈنگ تھرمومیٹر

Answer: C.अल्कोहोल थर्मामीटर
C.Alcohol thermometer
C.الکحل تھرمومیٹر

125 खालील शब्दांची चढत्या क्रमाने मांडणी करून खाली दिलेल्या प्रतिसादांमधून कोणता अर्थपूर्ण क्रम असेल?

1. बंगला
2. फ्लॅट
3. झोपडी
4. घर
5. महाल
6. हवेली

Which one of the given responses would be a meaningful order of the following words in ascending order?

1. Bungalow
2. Flat
3. Cottage
4. House
5. Palace
6. Mansion

چڑھتی ہوئی ترتیب میں دیےگیے جوابات میں سے کونسا ایک مندرجہ ذیل الفاظ کی معنی خیز ترتیب ہوگی؟
1. بنگلہ
2. فلیٹ
3. کاٹیج
4. گھر
5. محل
6. حویلی

A.3, 2, 1, 4, 6, 5
A.3, 2, 1, 4, 6, 5
A.3, 2, 1, 4, 6, 5

B.3, 2, 4, 1, 5, 6
B.3, 2, 4, 1, 5, 6
B.3, 2, 4, 1, 5, 6

C.3, 2, 4, 1, 6, 5
C.3, 2, 4, 1, 6, 5
C.3, 2, 4, 1, 6, 5

D.5, 6, 4, 1, 2, 3
D.5, 6, 4, 1, 2, 3
D.5, 6, 4, 1, 2, 3

Answer: C.3, 2, 4, 1, 6, 5
C.3, 2, 4, 1, 6, 5
C.3, 2, 4, 1, 6, 5

126 खालीलपैकी कोणती गोष्ट उत्तम प्रकारे सांगते कि विद्यार्थी बहुदा संघटीत किशोर-वयीन अपराधी टोळ्यांच्या सहवासात येतात?

Which of the following best explains the existence of organized gangs of delinquent teen-agers with which students often affiliate themselves?

مندرجہ ذیل میں سے کونسا نوجوانوں کے منظم گروہوں کی موجودگی کی بہترین وضاحت کرتا ہے جس کے ساتھ طالب علم اکثر اپنے آپ سے منسلک ہیں؟

A.निष्क्रिय आणि कडक कायद्याची अंमलबजावणी
A.Inactive and lax law enforcement
A.غیر فعال اور لاقانونی قانون نافذ کرنے والا

B.मनोरंजनासाठी उद्याने आणि इतर सुविधांचा अभाव
B.Lack of parks and other facilities for amusement
B.تفریح کےلئےپارکوناوردیگرسہولیات کی کمی

C.रचनात्मक उपक्रमांचा अभाव ज्यामधून विद्यार्थ्यांना समाधानकारक समाधान मिळू शकते
C.Lack of constructive activities from which students can derive wholesome satisfaction
C.تعمیری سرگرمیوں کی کمی جس سے طالب علموں کو صحت مند اطمینان حاصل ہوسکتا ہے

D.धाडसी मोहिमेची विद्यार्थ्यांची इच्छा
D.Student’s desire for adventure
D.طالب علم کی مہم جوئی کی خواہش

Answer: C.रचनात्मक उपक्रमांचा अभाव ज्यामधून विद्यार्थ्यांना समाधानकारक समाधान मिळू शकते
C.Lack of constructive activities from which students can derive wholesome satisfaction
C.تعمیری سرگرمیوں کی کمی جس سے طالب علموں کو صحت مند اطمینان حاصل ہوسکتا ہے

127 सूचनाः यापैकी कोणती आकृती प्रश्नामध्ये वापरलेल्या तीन शब्दांमधील नाते उत्तमरित्या दर्शवते.
सफरचंद, आंबा, केळे

DIRECTIONS: Which of the following figures represents the best relationship among the three terms used in the question.
Apple, Mango Banana

ہدایات: مندرجہ ذیل میں سے کون سی ڈایاگرام درج ذیل سوال میں استعمال ہونے والے تین الفاظ کے درمیان بہترین تعلقات کی نمائندگی کرتی ہے.
سیب، ام، کیلے

(A) 

(B) 

(C) 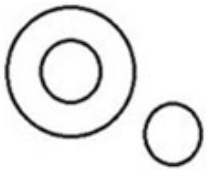

(D) 

Answer: (D) 

128

सूचना: खालील प्रश्नात, दिलेल्या पर्यायांमधून नातेसंबंध सांगणारी आकृती निवडा.

DIRECTIONS: In the question below, select the related figure from the given alternatives.

ہدایات: ذیل کے سوال میں، دئے گئے متبادلات میں سے متعلقہ تصویر منتخب کریں۔

Problem Figures

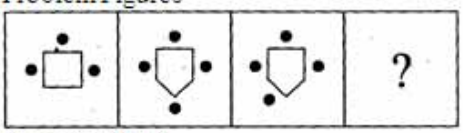

Answer Figure

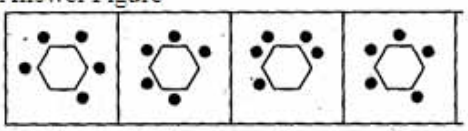

A. (A)

B. (B)

C. (C)

D. (D)

Answer: D. (D)

129 पूर्व- शाळकरी मुलांच्या तर्कशक्तीचा सर्वोत्कृष्ट पुरावा असे सुचवतो-

The best evidence related to the reasoning power of pre-school children suggests that—

پری اسکول کے بچوں کے استدلال کی قوت سے متعلق سب سے بہتر ثبوت یہ بتاتا ہے کہ-

A.ते तर्कशक्तीचा वापर करू शकत नाहीत
A.They cannot reason
A.وہ وجہ نہیں بتا سکتے ہیں

B.ते फक्त विनाकारण तर्क लावतात
B.They can reason deductively only
B.وہ صرف کمی کی وجہ بتا سکتے ہیں

C.ते फक्त प्रौढाच्या बुद्धिमत्ते इतकेच तर्क लावू शकतात
C.They can reason as well as adults of equal IQ
C.اپنے ساتھ برابر آئی کیو والے بالغوں کے جیسے ریزننگ کر سکتے ہیں

D.त्यांची मानसिक क्षमता अनुभव, व्यक्तिमत्वाची मांडणी ची मर्यादा हि प्रौढां समानच असते
D.They are subjected to the same limitations of mental ability experience, and personality structure as are adults.
D.وہ ذہنی صلاحیت کے تجربے اورشخصیت کی ساخت میناسی حد کے تابع ہیں، جس کے بالغ ہیں.

Answer: D.त्यांची मानसिक क्षमता अनुभव, व्यक्तिमत्वाची मांडणी ची मर्यादा हि प्रौढां समानच असते
D.They are subjected to the same limitations of mental ability experience, and personality structure as are adults.
D.وہ ذہنی صلاحیت کے تجربے اورشخصیت کی ساخت میناسی حد کے تابع ہیں، جس کے بالغ ہیں.

130 सूचना: दिलेल्या माहितीचा काळजीपूर्वक अभ्यास करा आणि खालील प्रश्नांची उत्तरे द्या.
सात खेळ-फेन्सिंग, हॉकी, फुटबॉल, गोल्फ, लाँग जंप, टेबल फुटबॉल आणि अंडरवॉटर हॉकी लागोपाठ सात दिवस आयोजित केले जाणार आहेत (सोमवारपासून सुरु होऊन रविवारी समाप्त) पण ते याच क्रमात असतील असे नाही. एका दिवशी फक्त एक खेळ आयोजित केला जाईल. अंडरवॉटर हॉकीनंतर केवळ दोन खेळांचे आयोजन केले जाईल. टेबल फुटबॉल आणि अंडरवॉटर हॉकीच्या मध्ये केवळ दोन खेळ आयोजित केले जातील. हॉकी आणि लाँग जंपमध्ये केवळ तीन खेळ आयोजित केले जातील. हॉकीचे आयोजन रविवारी केले जाणार नाही. फेन्सिंग गोल्फ आणि फुटबॉलच्या आधी आयोजित केले जाईल (अगदी लगेचच आधी असेल असे नाही). फुटबॉल गोल्फनंतर आयोजित केला जाईल (अगदी लगेच नंतर असेल असे नाही).
जर सगळे सात खेळ त्यांच्या नावांच्या अल्फाबेटिकल क्रमाने सोमवारपासून सुरु करत रविवारी समाप्त करण्यानुसार आयोजित केले गेले तर मूळ वेळापत्रकाच्या तुलनेत किती खेळांची स्थिती बदलणार नाही?

DIRECTIONS: Study the given information carefully and answer the given questions.
Seven plays-Fencing, Hockey, Football, Golf, Long jump, Table Football and Underwater Hockey are to be held on seven consecutive days (starting on Monday and ending on Sunday) not necessarily in the same order. Only one play can be held on one day. Only two plays will be held after Underwater Hockey . Only two plays will be held between Table Football and Underwater Hockey . Only three plays will be held between Hockey and Long jump. Hockey will not be held on Sunday. Fencing will be held before Golf and Football (not necessarily immediately before).Football will be held after Golf (not necessarily immediately after).
If all seven plays are held in the alphabetical order of their names starting on Monday and ending on Sunday, the positions of how many will remain unchanged as compared to the original schedule?

ہدایات: مندرجہ ذیل معلومات کو دھیان سے پڑھیں اور دیے گئے سوالوں کے جواب دیں۔

سات کھیل-فینسنگ، ہاکی، فٹ بال، گولف، لمبی چھلانگ، ٹیبل فٹ بال اور زیر آب ہاکی کو سات لگاتار دنوں میں منعقد کیا جانا ہے (پیر سے شروع ہو کر اور سنیچر میں ختم کرکے) جو ضروری نہیں ہے کہ یکساں ترتیب میں ہوں۔ ایک دن میں صرف ایک کھیل منعقد کیا جا سکتا ہے۔ زیر آب ہاکی کے بعد صرف دو کھیل منعقد ہوں گے۔ ٹیبل فٹ بال اور زیر آب ہاکی کے درمیان صرف دو کھیل منعقد ہوں گے۔ ہاکی اور لمبی چھلانگ کے درمیان صرف تین کھیل منعقد ہوں گے۔ ہاکی اتوار کو نہیں منعقد ہوگا۔ گولف اور فٹ بال سے پہلے فینسنگ کا انعقاد ہوگا (فوری پہلے ضروری نہیں ہے)۔ فٹ بال گولف کے بعد منعقد ہوگا (فوری بعد ضروری نہیں ہے)۔

گر سبھی کھیل اپنے ناموں کے حروف تہجی کی ترتیب میں پیر سے شروع ہو کر سنیچر تک منعقد کیے جائیں، تو اصل شیڈول کے مقابلہ میں کتنوں کی پوزیشن تبدیل نہیں ہوگی؟

A.तीन
A.Three
A.تین

B.तीनपेक्षा जास्त
B.More than three
B.تین سے زیادہ

C.एक
C.One
C.ایک

D.कोणतेही नाही
D.None
D.کوئی نہیں

Answer: C.एक
C.One
C.ایک

131 रिक्त इलेक्ट्रॉन कक्षामध्ये धातूत किती इलेक्ट्रॉन्स असतात?

How many electrons does metal have in valence shell?

ایک ویلینس سیل میں دھات کے کتنے الیکٹرون ہوتے ہیں؟

A.7, 8 किंवा 9
A.7, 8 or 9
A.7، 8 یا 9

B.1, 2 किंवा 3
B.1, 2 or 3
B.1، 2 یا 3

C.10, 20 किंवा 30
C.10, 20 or 30
C.10، 20 یا 30

D.5, 6 किंवा 7
D.5, 6 or 7
D.5، 6 یا 7

Answer: B.1, 2 किंवा 3
B.1, 2 or 3
B.1، 2 یا 3

132 व्यक्तिमत्व ही व्यक्तीमधील मानसिक प्रणालींची एक गतिशील संघटना आहे जी त्याचे/तिचे वागणूकीच्या चारित्र्याची रचना ठरवते. असे कोण म्हणाले:

Personality is a dynamic organization within the individual of those psychophysical systems which determine the his/her characteristic pattern of behavior was stated by:

شخصیت ، ان نفسی طبیعی (سائکو فزیکل) نظام میں سے کسی فرد کے اندر ایک متحرک تنظیم کا نام ہے جو کسی مرد یا عورت کے رویے کی خصوصیات کے پیٹرن کو طے کرتے ہیں، یہ کس نے کہا تھا:

A.जे.पी. दास
A.J.P. Das
A.جے پی داس

B.स्पिरमॅन
B.Spearman
B.اسپیر مین

C.ऑलपोर्ट
C.Allport
C.آل پورٹ

D.नागरेरी
D.Naglieri
D.نیگلیری

Answer: C.ऑलपोर्ट
C.Allport
C.آل پورٹ

133 सूचना: खालील प्रश्नांमध्ये दिलेल्या पर्यायांमधून संबंधित अक्षर/शब्द/संख्या निवडा.

12: 156 : ?

DIRECTIONS: In the following question, select the related letter/word/number from the given alternatives.

12: 156 : ?

سمت: مندرجہ ذیل سوال میں، دیے گئے متبادل سے متعلقہ حرف/لفظ/نمبر منتخب کریں۔

12: 156 : ?

A.0.3263888888888889
A.0.3263888888888889
A.0.3263888888888889

B.10 : 101
B.10 : 101
B.10 : 101

C.15 : 340
C.15 : 340
C.15 : 340

D.10 : 110
D.10 : 110
D.10 : 110

Answer:	D.10 : 110 D.10 : 110 D.10 : 110

134	Out of the given options which best expresses the meaning of the given Proverb? Attack is the best form of defence.
	A.In a battle, attacking the opposition first is better than waiting for them to attack
	B.While fighting, it is the best to allow your rival to hit you several times and get exhausted in the process
	C.In a fight, we should never hit our opponent
	D.None of the above
Answer:	A.In a battle, attacking the opposition first is better than waiting for them to attack

For More Info And Videos About TAIT-Exam Syllabus And Other Exam Visit My Channel
BADSHAHimp TAIT च्या 30 प्रश्नपत्रिका PDF Available Request 9765226781
YouTube WWW.YouTube.com/BADSHAHimp Subscribe My Channel

135 सूचना: अर्थपूर्ण परिच्छेद निर्माण करण्यासाठी, खाली दिलेली (P), (Q) (R), (S) आणि (T) ही पाच वाक्ये योग्य अनुक्रमाने पुनर्रचना करा; त्यांनतर खालील प्रश्नांची उत्तर द्या.

P. बऱ्याच कल्पना मांडल्या गेल्या पण मांजरावर मात करता येईल अशी एकही दिसली नाही.
Q. यासाठी, म्हाताऱ्या आणि ज्ञानी उंदराने विचारले "ते ठीक आहे.
R. त्यांचा सामान्य दुश्मन मांजराने निर्माण केलेल्या संकटावर चर्चा करण्यासाठी उंदरांनी सभा भरविली.
S. "पण मांजराच्या गळ्यात घंटा बांधणार कोण ?"
T. तेव्हा एका तरुण उंदराने सुचविले कि, मांजराच्या गळ्यात घंटा बांधल्यास जेव्हा ते येईल तेव्हा कळेल आणि धूर्त मांजराच्या हल्ल्यातून बचाव होईल.

पुनर्रचना केल्यानंतर खालीलपैकी कोणते वाक्य पाचवे असेल?

DIRECTION: Rearrange the following five sentences (P), (Q), (R), (S) and (T) in the proper sequence to form a meaningful paragraph; then answer the questions given below them.
P. Lots of ideas were shared, but none seemed good enough to beat the cat.
Q. To this, an old, wise mouse asked, “That’s fine.
R. A horde of mice gathered one night to discuss the problems created by their common enemy, the cat.
S. But who will bell the cat?”
T. Then a young mouse suggested that they should tie a bell around the cat’s neck to know when it is approaching and escape the sly cat’s attacks.

Which of the following should be the FIFTH sentence after rearrangement?

ہدایات: ان پانچ جملوں (P)، (Q)، (R)، (S) اور (T) کو با معنی پیرا بنانے کے لئے دوبارہ ترتیب دیجئے، پھر نیچے دے گئے سوالوں کے جواب دیجئے

P. بہت ساری راے دی گی، لیکن کوئی بھی اچھی نہیں تھی جو بللی کو ہرا سکھے.
Q. اس پر، ایک بوڑھے ،اکل مند چنھے نے کہا،" یے ٹھیک ہے.
R. ایک رات چنہو کی جماعت انکے یکسا دشمن ،بللی کی طرف سے کی جانے والی مشکلات کے بھارے میں گفتگو کرنے کے لئے جمہ ہو گئے.
S. لیکن بللی کی گھنٹی کون بجاےگا.
T. پھر ایک چھوٹے چونھے نے صلہ دی کہ یہ جاننے کے لئے کہ بللی کب آرہی ہے اور چھپنے کے لئے وو بللی کی گردن میں گھنٹی باندیگے.

V دوبارہ ترییب دینے کے بعد کون سا جملہ پانچوہ ہونا چاہیے؟

A.S
A.S
A.S

B.P
B.P
B.P

C.R
C.R
C.R

	D.T D.T D.T
Answer:	A.S A.S A.S
136	Choose the word which is most similar in meaning to the given word. ZEST
	A.Enthusiasm
	B.Unconcern
	C.Indifference
	D.Detachment
Answer:	A.Enthusiasm

For More Info And Videos About TAIT-Exam Syllabus And Other Exam Visit My Channel
TAIT च्या 30 प्रश्नपत्रिका PDF
BADSHAHimp Available Request 9765226781
WWW.YouTube.com/BADSHAHimp
Subscribe My Channel

137 सूचना: दिलेल्या माहितीचा काळजीपूर्वक अभ्यास करा आणि खालील प्रश्नांची उत्तरे द्या.
सात खेळ-फेन्सिंग, हॉकी, फुटबॉल, गोल्फ, लाँग जंप, टेबल फुटबॉल आणि अंडरवॉटर हॉकी लागोपाठ सात दिवस आयोजित केले जाणार आहेत (सोमवारपासून सुरु होऊन रविवारी समाप्त) पण ते याच क्रमात असतील असे नाही. एका दिवशी फक्त एक खेळ आयोजित केला जाईल. अंडरवॉटर हॉकीनंतर केवळ दोन खेळांचे आयोजन केले जाईल. टेबल फुटबॉल आणि अंडरवॉटर हॉकीच्या मध्ये केवळ दोन खेळ आयोजित केले जातील. हॉकी आणि लाँग जंपमध्ये केवळ तीन खेळ आयोजित केले जातील. हॉकीचे आयोजन रविवारी केले जाणार नाही. फेन्सिंग गोल्फ आणि फुटबॉलच्या आधी आयोजित केले जाईल (अगदी लगेचच आधी असेल असे नाही). फुटबॉल गोल्फनंतर आयोजित केला जाईल (अगदी लगेच नंतर असेल असे नाही).
दिलेल्या वेळापत्रकाच्या आधारावर विशिष्ट मार्गाने जर टेबल फुटबॉल हा खेळ सोमवारशी निगडीत आहे. त्याचप्रमाणे अंडरवॉटर हॉकी खेळ गुरुवारशी संबंधित आहे. याच प्रकारे, हॉकी खेळ खालीलपैकी कोणत्या दिवसाशी संबंधित आहे?

DIRECTIONS: Study the given information carefully and answer the given questions.
Seven plays-Fencing, Hockey, Football, Golf, Long jump, Table Football and Underwater Hockey are to be held on seven consecutive days (starting on Monday and ending on Sunday) not necessarily in the same order. Only one play can be held on one day. Only two plays will be held after Underwater Hockey . Only two plays will be held between Table Football and Underwater Hockey . Only three plays will be held between Hockey and Long jump. Hockey will not be held on Sunday. Fencing will be held before Golf and Football (not necessarily immediately before).Football will be held after Golf (not necessarily immediately after).
If play Table Football is related to Monday in a certain way based on the given schedule. Similarly, Play Underwater Hockey is related to Thursday. In the same way, Play Hockey is related to which of the following days?

ہدایات: مندرجہ ذیل معلومات کو دھیان سے پڑھیں اور دیے گئے سوالوں کے جواب دیں۔
سات کھیل-فینسنگ، ہاکی، فٹ بال، گولف، لمبی چھلانگ، ٹیبل فٹ بال اور زیر آب ہاکی کو سات لگاتار دنوں میں منعقد کیا جانا ہے (پیر سے شروع ہو کر اور سنیچر میں ختم کرکے) جو ضروری نہیں ہے کہ یکساں ترتیب میں ہوں۔ ایک دن میں صرف ایک کھیل منعقد کیا جا سکتا ہے۔ زیر آب ہاکی کے بعد صرف دو کھیل منعقد ہوں گے۔ ٹیبل فٹ بال اور زیر آب ہاکی کے درمیان صرف دو کھیل منعقد ہوں گے۔ ہاکی اور لمبی چھلانگ کے درمیان صرف تین کھیل منعقد ہوں گے۔ ہاکی اتوار کو نہیں منعقد ہوگا۔ گولف اور فٹ بال سے پہلے فینسنگ کا انعقاد ہوگا (فوری پہلے ضروری نہیں ہے)۔ فٹ بال گولف کے بعد منعقد ہوگا (فوری بعد ضروری نہیں ہے)۔
اگر دیے گئے شیڈول کی بنیاد پر ایک خاص طریقہ میں کھیل ٹیبل فٹ بال کا تعلق پیر سے ہے۔ اسی طرح، کھیل زیر آب ہاکی کا تعلق جمعرات سے ہے۔ اسی طریقے سے ہاکی کے کھیل کا تعلق مندرجہ ذیل دنوں میں سے کس سے ہے؟

A.बुधवार
A.Wednesday
A.بدھ

B.शुक्रवार
B.Friday
B.جمعہ

C.मंगळवार
C.Tuesday
C.منگل

D.शनिवार
D.Saturday
D.سنیچر

Answer: C.मंगळवार
C.Tuesday
C.منگل

138 ∆ABC मध्ये, ‘S’ हे परिकेंद्रक आहे, तर:

If in a ∆ABC, ‘S’ is the circumcentre, then:

اگر ΔABC میں، 'S' circumcentre ہے، تو:

A.S हा त्रिकोणाच्या सर्व शिरोबिंदूंपासून समदूर असतो
A.S is equidistant from all the vertices of a triangle
A.S مثلث کے تمام عمودی حصے سے برابر ہے

B.S हा त्रिकोणाच्या सर्व बाजूंपासून समदूर असतो
B.S is equidistant from all the sides of a triangle
B.S مثلث کے تمام اطراف کے برابر ہے

C.AS, BS आणि CS हे कोन दुभाजक आहेत
C.AS, BS and CS are the angular bisectors
C.BS, AS اور CS اینگولر قاطع ہیں

D.जोडलेले AS, BS आणि CS हे समोरील बाजूवर उंची असतात
D.AS, BS and CS produced are the altitudes on the opposite sides
D. BS, AS اور CS مخالف سمت کے الٹیٹیوڈ بناتے ہیں.

Answer: A.S हा त्रिकोणाच्या सर्व शिरोबिंदूंपासून समदूर असतो
A.S is equidistant from all the vertices of a triangle
A.S مثلث کے تمام عمودی حصے سے برابر ہے

139 ‘ महिमा ‘ या शब्दाचा विरुद्धार्थी शब्द कोणता ?

A.कोतेपणा

B.थोरवी

C.महती

D.कथा

Answer: A.कोतेपणा

140	“प्रिन्सिपल सायकॉलॉजी” हे याचे शीर्षक आहे “Principal Psychology” is the tittle for "پرنسپل سائکولوجی" کس کتاب کا لقب ہے"
	A.संपादित चिंता या विषयावरील पहिले पुस्तक A.First book on Acquired anxiety A.تشویش پر حاصل کی گئی پہلی کتاب
	B.मानसशास्त्र या विषयावरील पहिले पुस्तक B.First book on psychology B.علم نفسیات پر پہلی کتاب
	C.मानाशास्त्रावरील शेवटचे प्रकाशित पुस्तक हिल येट C.The last book published on psychology hill yet C.سائکلوجی ہل پر شائع کردہ آخری کتاب
	D.वरीलपैकी कोणतेही नाही D.None of the above D.درج بالا میں سے کوئی نہیں
Answer:	B.मानसशास्त्र या विषयावरील पहिले पुस्तक B.First book on psychology B.علم نفسیات پر پہلی کتاب
141	दिलेल्या पर्यायांपैकी वेगळे ते निवडा: Select the odd one out from the given options: دیے گئے اختیارات میں سے بے جوڑ کو منتخب کریں:
	A.बगळा A.Crane A.سارس
	B.कावळा B.Crow B.کوا
	C.फुलपाखरू C.Butterfly C.تتلی
	D.खंड्या D.Kingfisher D.خور پرندہ

Answer: C.फुलपाखरू
C.Butterfly
C.تتلی

142 **सूचना**: खालील प्रश्नात एक उघडलेला फासा दाखविला आहे. उत्तराच्या पर्यायांपैकी कोणता पर्याय □ या चिन्हाच्या विरुद्ध बाजूला येईल?

DIRECTIONS: In the following question an unfolded dice is given. From the given alternatives which of the following will be opposite of C?

ہدایات: مندرجہ ذیل سوال میں ایک کھلا ہوا ڈبہ دیا گیا ہے- دیئے گئے متبادلات میں مندرجہ ذیل میں سے کون C کے برعکس ہو گی؟

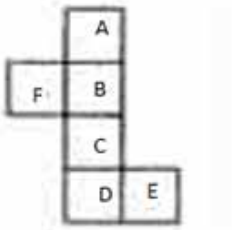

A. A

B. B

C. C

D. D

Answer: C. C

143 सरळ रूप द्या:
43241.69585 – 21230.08888 = ?

Simplify:
43241.69585 – 21230.08888 = ?

آسان بنائیں:
43241.69585 – 21230.08888 = ?

A.22001.606970000001
A.22001.606970000001
A.22001.606970000001

	B.21011.606970000001 B.21011.606970000001 B.21011.606970000001
	C.22011.606970000001 C.22011.606970000001 C.22011.606970000001
	D.22010.606970000001 D.22010.606970000001 D.22010.606970000001
Answer:	C.22011.606970000001 C.22011.606970000001 C.22011.606970000001
144	खालीलपैकी कोणते वाक्य चुकीचे आहे? Which of the following is false? مندرجہ ذیل میں سے کون سا غلط ہے؟
	A.पाणी एक रटाळ द्रव आहे A.Water is a colorless liquid A. پانی ایک بیرنگ مائع ہے
	B.पाणी एक बेचव द्रव आहे B.Water is a tasteless liquid B. پانی ایک بے مزہ مائع ہے
	C.पाणीला एक उग्र गंध असते C.Water has a pungent odor C. پانی میں ایک تیکھی گند ہوتی ہے
	D.वरीलपैकी एकही नाही D.None of the above D. مندرجہ بالا میں سے کوئی بھی نہیں
Answer:	C.पाणीला एक उग्र गंध असते C.Water has a pungent odor C. پانی میں ایک تیکھی گند ہوتی ہے
145	Out of the given options, choose the most appropriate one to fill in the blank. After a long career with the company, she _____to the position of chief executive.

A.has risen

B.have rise

C.has rise

D.have rose

Answer: A.has risen

146 दिलेली अदलाबदल : चिन्हे ÷ आणि x, तसेच आकडे 2 आणि 6 ; तर 6 x 4 ÷ 2 चे मूल्य किती ?

Given interchanges: signs ÷ and ×, and numbers 2 and 6; then the value of 6 × 4 ÷ 2 is

دیئے گئے تبادلے: علامات ÷ اور ×، اور نمبر 2 اور 6؛ تو 6×4÷ 2 کی تعداد ہے

A.4
A.4
A.4

B.6
B.6
B.6

C.3
C.3
C.3

D.36
D.36
D.36

Answer: C.3
C.3
C.3

147 Out of the given four words only one is spelt correctly. Find the word that is correctly spelt.

A.Fluorescent

B.Vaccuum

C.Restarant

D.Secretery

Answer: A.Fluorescent

148

सूचना: खालील प्रश्नात उत्तरातील पर्यायांपैकी कोणत्या पर्यायी आकृतीत प्रश्नातील आकृती अंतर्भूत आहे?

DIRECTIONS: In the given question find the answer figure in which question figure is embedded.

ہدایات: دئے گئے سوال میں سے اس جواب والی تصویر کو تلاش کریں جس میں سوال کی تصویر کو جمایا گیا ہے۔

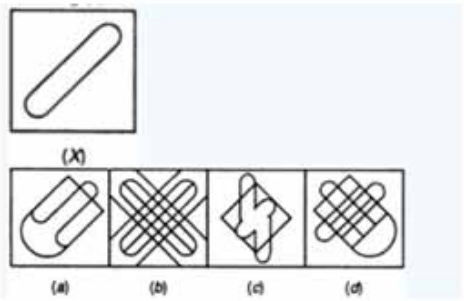

A. (A)

B. (B)

C. (C)

D. (D)

Answer: B. (B)

149

जर या {1, 2, 3…. 56} संचामधून संख्या निवडली गेली, तर निवडलेली संख्या 9 च्या पटीत असण्याची संभाव्यता असेल

If a number is chosen from the set {1, 2, 3…. 56}, then the probability that the chosen number is a multiple of 9 is

اگر ایک عدد سیٹ {1، 2، 3.... 56} سے منتخب کیا جاتا ہے پھرکتنا امکان ہے کہ منتخب کردہ نمبر 9 سے قابل ضرب ہے

A.1/28
A.1/28
A.1/28

B.3/28
B.3/28
B.3/28

C.1/27
C.1/27
C.1/27

D.9/17
D.9/27
D.9/27

Answer: B.3/28
B.3/28
B.3/28

150 राज्य विधानसभेतील निवडून आलेल्या सदस्यांची कमाल संख्या:

Maximum number of elected members in a state assembly is:

کسی ریاست کی اسمبلی میں منتخب ارکان کی زیادہ سے زیادہ تعداد ہے:

A.300
A.300
A.300

B.500
B.500
B.500

C.400
C.400
C.400

D.600
D.600
D.600

Answer: B.500
B.500
B.500

151 Fill in the blank with the correct article.
_____Brahmaputra, also called Tsangpo in Tibet, is one of the main rivers in Asia.

A.The

B.A

C.An

D.No article required

Answer: A.The

152 द्रव धातू आणि अधातूचे उदाहरण:

An example of liquid metal and non-metal:

سیال دھات اور غیر دھات کی مثال ہے:

A.गॅलियम, पारा
A.Gallium, Mercury
A.گیلیم، مرکری

B.पारा, क्लोरीन
B.Mercury, chlorine
B.مرکری، کلورین

C.पारा, ब्रोमिन
C.Mercury, Bromine
C.مرکری، برومین

D.ब्रोमिन, सल्फर
D.Bromine, Sulphur
D.برومین، سلفر

Answer: C.पारा, ब्रोमिन
C.Mercury, Bromine
C.مرکری، برومین

153 निर्देश: मालिका पूर्ण करा

?, MQU, YCG, KOS

DIRECTION: Complete the series

?, MQU, YCG, KOS

ہدایت اس سرج کو مکمّل کرو

?, MQU, YCG, KOS

A.AEI
A.AEI
A.AEI

B.BEI
B.BEI
B.BEI

C.AFI
C.AFI
C.AFI

D.BFI
D.BFI
D.BFI

Answer:

A.AEI
A.AEI
A.AEI

154

सूचना: कागदाच्या एक तुकड्याला प्रश्नातील (मुख्य) आकृतीत दाखविल्याप्रमाणे मध्यभागी दोन घड्या घातल्या व तो कापला. तो उलगडल्यानंतर कसा दिसेल? उत्तरादाखल दिलेल्या A, B, C, आणि D पर्यायांमधून योग्य आकृती निवडा.

DIRECTIONS: A piece of paper is folded and cut as shown below In the question figures. From the given answer figures, indicate how will it appear when opened?

ہدایات: کاغذ کے ایک ٹکڑے کو ذیل میں سوال کی تصاویر کے مطابق موڑا اور کاٹا جاتا ہے- دیئے گئے جواب کی تصویر سے، اس بات کا اشارہ کریں کہ کھولے جانے پر یہ کیسا نظر آئیگا-

प्रश्न आकृती:

Question Figures:

سوال کی تصویر:

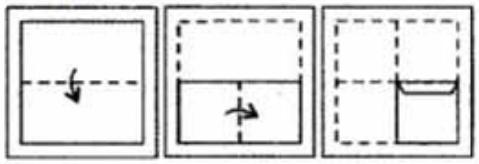

(A)

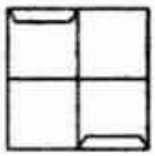

(B)

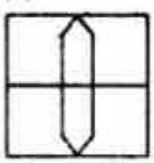

(C)

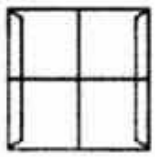

(D)

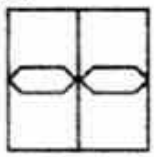

Answer: (D)

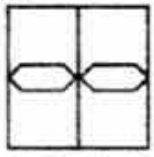

155 प्रसिद्ध व्यक्तिमत्व_____ द्विध्रुवीय विकारा पासून ग्रस्त आहे.

Famous personality _____ suffers from Bipolar disorder.

مشہور ہستی _____ دو قطبی (بائی پولر) عارضے سے متاثر تھے۔

A. रॉबिन विल्यम्स
A.Robin Williams
A. رابن ولیمس

B.डेन लोवातो
B.Denn Lovato
B.ڈن لواٹو

C.ब्रिटनी स्पीअर्स
C.Britney spears
C.برٹنی اسپیرس

D.(a) ग्वेनेथ पॅल्ट्रो
D.Gwyneth Paltrow
D.گائی نیتھ پالٹرو

Answer: C.ब्रिटनी स्पीअर्स
C.Britney spears
C.برٹنی اسپیرس

156 विधान:
पूर्वी एक्स मधील दंगलीमुळे बर्याच समस्या निर्माण झाल्या होत्या आणि परिसरात शांती व सुव्यवस्थेचा विपरित परिणाम झाला होता. समाजातील एका व्यक्तीचा एक नेता हा मुद्दा निकाली काढण्यासाठी कम्युनिटी बीच्या नेत्याशी बोलू इच्छित आहे परंतु कम्युनिटी बीच्या नेत्याला रस नाही.

कृतीचा कोर्स:
I. कम्युनिटी ए च्या नेत्यांना मारहाण करावी
II. कम्युनिटी 'बी'चा नेता मारला पाहिजे.

Statement:
In past the riots in district X had caused lot of problems and disrupted peace and order in the area. A leader of one of the communities A want to talk to the leader of community B for sorting out the matter but the leader of community B is not interested.
Course of actions:
I. Leader of community A should be beaten up.
II. Leader of community B should be beaten up

بیان:
ماضی میں X ڈسٹرکٹ میں فسادات کی وجہ سے بہت سے مسائل پیدا ہوئے اور امن و امان میں خلل پیدا ہوا۔ ایک کمیونٹی A کا لیڈر کمیونٹی کے لیڈر کو اس ملاقات میں کوئی دلچسپی نہیں ہے۔ B کمیونٹی کے لیڈر سے ملنا چاہتا ہے۔لیکن B معاملہ حل کرنے کے لیے

لائحہ عمل:
I-A کمیونٹی کے لیڈر پر تشدد کیاجاناچاہیے
II- B کمیونٹی کے لیڈر پر تشدد کیاجاناچاہیے

A.फक्त I अनुसरून आहे
A.Only I follows
A. صرف I لاگو ہو گا۔

B.फक्त II अनुसरण करते आहे
B.Only II follows
B. صرف II لاگو ہو گا۔

C.एकतर I किंवा II अनुसरून आहे
C.Either I or II follows
C. I یا II میں سے ایک لاگو ہو گا۔

D.I किंवा II दोन्हीपैकी काहीही अनुसरण करत नाही
D.Neither I nor II follows
D. I اور II میں سے کوئی بھی لاگو نہیں ہو گا۔

Answer: D.I किंवा II दोन्हीपैकी काहीही अनुसरण करत नाही
D.Neither I nor II follows
D. I اور II میں سے کوئی بھی لاگو نہیں ہو گا۔

157 निर्देश: खालील प्रश्नांमध्ये प्रश्न चिन्हाच्या (?) जागी कोणते अंदाजे मूल्य यायला हवे?
1562 ÷ 0.24 × 356=?

DIRECTIONS: What approximate value should come in the place of question mark (?) in the following equations.

1562 ÷ 0.24 × 356=?

ہدایات: مندرجہ ذیل سوال میں سوال کا نشان (?) کی جگہ پر کون سا تخمینہ ویلیو آنے گا -
1562 ÷ 0.24 × 356=?

A.24
A.24
A.24

B.18
B.18
B.18

C.12
C.12
C.12

D.28
D.28
D.28

Answer: B.18
B.18
B.18

158 खालील आकृतीमध्ये किती वर्तुळे आहेत?

How many circles are there in the figure given below?

ذیل میں دی گئی تصاویر میں کتنے دائرے موجود ہیں؟

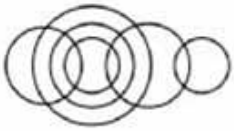

A. 6

B. 7

C. 10

D. 8

Answer: A. 6

159 सूचना: अर्थपूर्ण परिच्छेद निर्माण करण्यासाठी, खाली दिलेली (P), (Q) (R), (S) आणि (T) ही पाच वाक्ये योग्य अनुक्रमाने पुनर्रचना करा; त्यांनतर खालील प्रश्नांची उत्तर द्या.

P. बऱ्याच कल्पना मांडल्या गेल्या पण मांजरावर मात करता येईल अशी एकही दिसली नाही.
Q. यासाठी, म्हाताऱ्या आणि ज्ञानी उंदराने विचारले "ते ठीक आहे.
R. त्यांचा सामान्य दुश्मन मांजराने निर्माण केलेल्या संकटावर चर्चा करण्यासाठी उंदरांनी सभा भरविली.
S. "पण मांजराच्या गळ्यात घंटा बांधणार कोण ?"
T. तेव्हा एका तरुण उंदराने सुचविले कि, मांजराच्या गळ्यात घंटा बांधल्यास जेव्हा ते येईल तेव्हा कळेल आणि धूर्त मांजराच्या हल्ल्यातून बचाव होईल.

पुनर्रचना केल्यानंतर खालीलपैकी कोणते वाक्य दुसरे असेल?

DIRECTION: Rearrange the following five sentences (P), (Q), (R), (S) and (T) in the proper sequence to form a meaningful paragraph; then answer the questions given below them.
P. Lots of ideas were shared, but none seemed good enough to beat the cat.
Q. To this, an old, wise mouse asked, “That’s fine.
R. A horde of mice gathered one night to discuss the problems created by their common enemy, the cat.
S. But who will bell the cat?”
T. Then a young mouse suggested that they should tie a bell around the cat’s neck to know when it is approaching and escape the sly cat’s attacks.

Which of the following should be the SECOND sentence after rearrangement?

ہدایات: ان پانچ جملوں (P)، (Q)، (R)، (S) اور (T) کو با معنی پیرا بنانے کے لئے دوبارہ ترتیب دیجئے، پھر نیچے دے گئے سوالوں کے جواب دیجئے

P. بہت ساری راے دی گی، لیکن کوئی بھی اچھی نہیں تھی جو بلی کو ہرا سکھے.
Q. اس پر، ایک بوڑھے ،اکل مند چنھے نے کہا،" یے ٹھیک ہے.
R. ایک رات چنہو کی جماعت انکے یکسا دشمن ،بلی کی طرف سے کی جانے والی مشکلات کے بھارے میں گفتگو کرنے کے لئے جمہ ہو گئے.
S. لیکن بلی کی گھنٹی کون بجاےگا.
T. پھر ایک چھوٹے چونھے نے صلہ دی کہ یہ جاننے کے لئے کہ بلی کب آرہی ہے اور چھپنے کے لئے وو بلی کی گردن میں گھنٹی باندیگے.

دوبارہ ترییب دینے کے بعد کون سا جملہ دوسرا ہونا چاہیے؟

A.P
A.P
A.P

B.R
B.R
B.R

C.Q
C.Q
C.Q

D.T
D.T
D.T

Answer: A.P
A.P
A.P

160 अन्सारी हा बिंदूपेक्षा श्रीमंत आहे. क्लेवीन हा अन्सारीपेक्षा श्रीमंत आहे. क्लेवीनपेक्षा दया श्रीमंत आहे. एलन हा सर्वात गरीब आहे. तर श्रीमंतीच्या अनुक्रमामध्ये मध्यभागी कोण आहे ?

Ansari is richer than Bindu. Clavin is richer than Ansari. Daya is richer than Clavin. Elan is poorest of all. Who is in the middle position in the order of richness?

انصاری بندو سے امیر ہے. کلون انصاری سے امیر ہے. دیا کلون سے امیر ہے. ایلن سب سے غریب ہے.امیری کے حساب سے کون درمیان میں ہے؟

A.(a) अन्सारी
A.Ansari
A.انصاری

B.(b) बिंदू
B.Bindu
B.بندو

C.(c) एलन
C.Elan
C.الان

D.(d) दया
D.Daya
D.دیا

Answer: A.(a) अन्सारी
A.Ansari
A.انصاری

161 खालीलपैकी अशुद्ध शब्द कोणता ?

A.चीघळणे

	B.चिटपाखरू
	C.चालकाबोलका
	D.चपळाई
Answer:	A.चीघळणे

162	खालीलपैकी भूमिगत पाण्याचे प्रमुख स्त्रोत कोणते आहे? Which of the following is the major source of underground water? درج ذیل میں سے کون زیر زمین پانی کا بڑا ذریعہ ہے؟
	A.तलाव A.Lake A. جھیل
	B.जलधी B.Sea B. سمندر
	C.महासागर C.Ocean C. اوقیانوس
	D.ट्यूब विहिर/ विहिर D.Tube well/ well D. ٹیوب ویل / کنواں
Answer:	D.ट्यूब विहिर/ विहिर D.Tube well/ well D. ٹیوب ویل / کنواں

163 सूचना: प्रत्येक प्रश्नाला एक प्रमुख विधानासोबत चार विधाने आहेत ज्यांच्याखाली A, B, C आणि D असे चार विधान आहेत. क्रमवार विधानांची जोडी निवडा ज्यामध्ये प्रथम विधान दुसऱ्या विधानाला सुचवते, आणि दोन्ही विधाने तर्किकदृष्ट्या प्रमुख विधानासोबत निगडित असेल.

कार्यालयात संगणक किंवा प्रिंटरची आवश्यकता आहे.
A. कार्यालयात एका संगणकाची आवश्यकता आहे.
B. कार्यालयात संगणकाची गरज नाही.
C. कार्यालयात प्रिंटरची आवश्यकता आहे.
D. कार्यालयात प्रिंटरची आवश्यकता नाही.

DIRECTIONS: Each question has a main statement followed by four statements labelled A, B, C and D. Choose the ordered pair of statements, where the first statement implies the second, and the two statements are logically consistent with the main statement.

The office needs either a computer or a printer
A.The office needs a computer
B.The office does not need a computer
C.The office needs a printer
D.The office does not need a printer

ہدایت: ہر سوال میں ایک جملہ ہے جسکے بعد چار جملےاے، بی،سی اور ڈی کے نام سے دئے گئے ہیں اسمیں منسلک جوڑیوں کو چنئے۔ جہاں پہلا جملہ دوسرے جملہ کی اور اشارہ کر رہا ہے اور دو جملے منطقی مرکزی بیان کے مطابق ہیں

آفس میں یا پرنٹر چاہیے یا کمپیوٹر
A۔ آفس میں کمپیوٹر چاہیے
B۔ آفس میں کمپیوٹر نہیں چاہیے
C۔ آفس میں پرنٹر چاہیے
D۔ آفس میں پرنٹر نہیں چاہیے

A.BD
A.BD
A.BD

B.DA
B.DA
B.DA

C.CB
C.CB
C.CB

D.AC
D.AC
D.AC

Answer: B.DA
B.DA
B.DA

164

सूचना: दिलेल्या पर्यायांमधून श्रेणी पूर्ण करणारी योग्य आकृती निवडा.

DIRECTIONS: Complete the series by choosing right figure from the given choices.

ہدایات: دئے گئے انتخابات میں سے صحیح تصویر کو منتخب کرکے سلسلہ مکمل کریں۔

Problem Figures

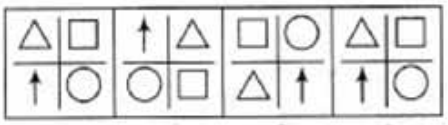

1 2 3 4

Answer Figures

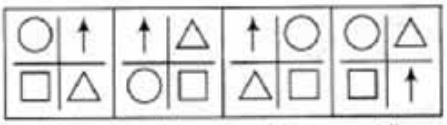

(a) (b) (c) (d)

A. (A)

B. (B)

C. (C)

D. (D)

Answer: A. (A)

165 ' वृक्षौदार्य ' या शब्दाची संधी सोडवा.

A.वृक्ष + उदार

B.वृक्ष + ओदार्य

C.वृक्ष + औदार्य

D.यापैकी नाही

Answer: C.वृक्ष + औदार्य

166 अश्या तुकड्यांची संख्या किती असले ज्यामध्ये एका घनाला एका दिशेने सहा काप करून, आणि दुसऱ्या दिशेने पाच काप करून कापले जाऊ शकेल?

What is the number of pieces into which a cube can be cut by six cuts in one direction and five cuts in another direction?

کیوب کے ایک سمت میں 6 کٹ، دوسرے سمت میں 5 کٹ لگانے سے کیود کے کتنے ٹکڑے ہوں گے؟

A.36
A.36
A.36

B.54
B.54
B.54

C.42
C.42
C.42

D.24
D.24
D.24

Answer: C.42
C.42
C.42

167 सूचना: खालील प्रश्नांमध्ये दिलेल्या पर्यायांमधून संबंधित अक्षर समूह निवडा.

KMF : LLH : : RMS : ?

DIRECTIONS: In the following question, select the related group of letters from the given alternatives.

KMF : LLH : : RMS : ?

سمت: مندرجہ ذیل سوال میں، دیے گئے متبادل میں سے حروف کا متعلقہ گروپ منتخب کریں۔
KMF : LLH : : RMS : ?

A.SLR
A.SLR
A.SLR

B.SLU
B.SLU
B.SLU

C.SSU
C.SSU
C.SSU

D.SUS
D.SUS
D.SUS

Answer: B.SLU
B.SLU
B.SLU

168 सूचना : खालील प्रत्येक प्रश्नात दोन विधाने I आणि II दिलेले आहेत. हे विधान एकतर स्वतंत्र कारण असू शकतात किंवा स्वतंत्र कारणांचे परिणाम असू शकतात. यांपैकी एक विधान इतर विधानाचा परिणाम असू शकतो. दोन्ही विधाने वाचा आणि खालीलपैकी कोणत्या उत्तराचा पर्याय या दोन्ही विधानांमधील संबंधांचे वर्णन करतो ते ठरवा.

विधान :
I. भ्रष्टाचार सतत वाढत आहे.
II. महिलांवरील अत्याचारात सातत्याने वाढ होत आहे.

DIRECTIONS: Below in each question are given two statements I and II. These statements may be either independent causes or may be effects of independent causes. One of these statements may be the effect of the other statement. Read both the statements and decide which of the following answer choice correctly depicts the relationship between these two statements.

Statements:
I. Corruption has been steadily increasing.
II. Crime against women have been steadily increasing.

ہدایات: نیچے ہر سوال میں دو بیانات I اور II آ تو یہ بیانات یا تو آزاد وجوہات کے اثرات ہو سکتے ہیں۔ انہیں گئے ہیں۔ دونوں بیانات پڑھیں اور فیصلہ کریں کہ نیچے دیے گئے کس جواب کا انتخاب ان بیانات میں سے ایک بیان دوسرے کا اثر ہو سکتا ہے۔ دونوں بیانات کے در میان تعلق کو ٹھیک سے ظاہر کرتا ہے۔

بیانات:
I – کرپشن میں مسلسل اضافہ ہو رہا ہے۔
II ۔ خواتین کے خلاف جرائم میں مسلسل اضافہ ہورہا ہے۔

A.विधान I कारण आहे आणि विधान II त्याचा परिणाम आहे;
A.Statement I is the cause and statement II is its effect;
A.بیان نمبر I وجہ ہے اور بیان نمبر II اس کا اثر ہے۔

B.विधान II कारण आहे आणि विधान I त्याचा परिणाम आहे;
B.Statement II is the cause and statement I is its effect;
B.بیان نمبر II وجہ ہے اور بیان نمبر I اس کا اثر ہے۔

C.विधान I आणि II दोन्ही स्वतंत्र कारणे आहेत;
C.Both the statements I and II are independent causes;
C.دونوں بیانات نمبر I اور نمبر II آزاد وجوہات ہیں۔

D.विधान I आणि II दोन्ही स्वतंत्र कारणांचे परिणाम आहेत;
D.Both the statements I and II are effects of independent causes;
D.دونوں بیانات نمبر I اور نمبر II آزاد وجوہات کے اثرات ہیں۔

Answer: D.विधान I आणि II दोन्ही स्वतंत्र कारणांचे परिणाम आहेत;
D.Both the statements I and II are effects of independent causes;
D.دونوں بیانات نمبر I اور نمبر II آزاد وجوہات کے اثرات ہیں۔

169 मॉस्किटो रिपेलेंट म्हणजे-

Mosquito repellents are -

مچھر مار ہے -

A.किटनाशक
A.Pesticides
A.پیسٹی سائڈ

B.रासायनिक खते
B.Fertilizers
B.کھاد

C.उपशामक
C.Sedatives
C.دوا

D.कीटकनाशक
D.Insecticides
D.انسیکٹی سائڈ

Answer: D.कीटकनाशक
D.Insecticides
D.انسیکٹی سائڈ

170 $\frac{(69)^2-(32)^2}{69-32}=?$

	A. 101
	B. 1000
	C. 10000
	D. 1001
Answer:	A. 101

171	खालीलपैकी कोणते व्यवसाय सर्वात जास्त सदस्य असल्याचा दावा करते? Which of the following professions claims the largest membership? مندرجہ ذیل کاروباروں میں سے کون سب سے بڑی رکنیت کا دعوی کرتا ہے؟
	A.दंत चिकित्सा A.Dentistry A.دندان سازی
	B.अभियांत्रिकी B.Engineering B.انجینئرنگ
	C.कायदा C.Law C.قانون
	D.शिक्षण D.Teaching D.تدریس.
Answer:	D.शिक्षण D.Teaching D.تدریس.

172	पृथ्वीचा वर्तमान अक्षीय कल _____ आहे The earth’s current axial tilt is - زمین کا موجودہ دھری پر جھکاؤ ہے۔

A.20.5o
A.20.5o
A.20.5o

B.21.6o
B.21.6o
B.21.6o

C.22.0o
C.22.0o
C.22.0o

D.23.4o
D.23.4o
D.23.4o

Answer: D.23.4o
D.23.4o
D.23.4o

173 $x^2 – 24x + 144 = 0$ या वर्गसमीकरणाची मुळे आहेत:

The roots of the quadratic equation $x^2 – 24x + 144 = 0$ are:

مربع مساوات کے روٹ x2 – 24x + 144 = 0ہیں:

A.-12, -12
A.-12,-12
A.-12,-12

B.12, 12
B.12, 12
B.12, 12

C.6, 8
C.6, 8
C.6, 8

D.-6, -8
D.-6,-8
D.-6,-8

Answer: B.12, 12
B.12, 12
B.12, 12

174	माल्कॉल्म टर्नबुल हे _____ आहेत Malcolm Turnbull is the – میلکم ٹرن بل ہے۔
	A.कॅनडा चे अध्यक्ष A.President of Canada A.کینڈا کے صدر
	B.ऑस्ट्रेलियाचे अध्यक्ष B.President of Australia B.آسٹریلیا کے صدر
	C.कॅनडाचे प्रधानमंत्री C.Prime Minister of Canada C.کینڈا کے وزیر اعظم
	D.ऑस्ट्रेलियाचे प्रधानमंत्री D.Prime Minister of Australia D.آسٹریلیا کے وزیر اعظم
Answer:	D.ऑस्ट्रेलियाचे प्रधानमंत्री D.Prime Minister of Australia D.آسٹریلیا کے وزیر اعظم

175 सूचना: दोन विधाने आणि त्यानंतर दोन निष्कर्ष, I आणि II दिले आहेत. ही विधाने सामान्यतः ज्ञात वस्तुस्थितीपेक्षा भिन्न असली तरी सत्य आहेत असे समजा. दिलेल्यापैकी कोणता निष्कर्ष दिलेल्या विधानांवरुन नक्की काढता येऊ शकतो हे तुम्ही ठरवायचे आहे.तुमचे उत्तर सूचित करा.

विधान:
(a) सर्व कपाटे घड्याळे आहेत.
(b) सर्व घड्याळे महाग आहेत.
निष्कर्ष:
I. सर्व कपाटे महाग आहेत.
II. काही महाग वस्तू कपाटे आहेत.

DIRECTION: Two statements are given following by two conclusions, I, and II. You have to consider that statements to be true, even if they seem to be at variance from commonly known facts. You are to decide which of the given conclusions can definitely be drawn from the given statements. Indicate your answer.

Statement:
(a) All cupboards are watches.
(b) All watches are costly.

Inferences:
I. All Cupboards are costly.
II. Some costly things are cupboards.

ہدایات: دو سٹیٹمنٹ جوکہ دو خلاصوں پر مشتمل ہیں .I اور II. اپ کو وہ سٹیٹمنٹ درست ماننا ہے، اگرچہ دکہنے میں وہ بہت سارے حقاٰق ست مطبقت رکہتی ہو۔ اپ کو دیے گے خلاصوں میں سے یقینی طور پر اسے اختیار کرنا ہے جو سٹیٹمنٹ سے نکلا ہو. اپنا جواب تلاش کرے.

اظہار بیان:
(a) تمام الماریاں گھڑیاں ہے.
(b) تمام گھڑیاں کیمتی ہے.

نتائج:
I. تمام الماریاں کیمتی ہے.
II. کچھ کیمتی چیزیں الماریاں ہے.

A.केवळ निष्कर्ष I निष्कर्ष निघेल
A.Only inference I follows
A.خالی خلاصہ I تعاقب کرتا ہے

B.केवळ निष्कर्ष II निष्कर्ष निघेल
B.Only inference II follows
B.خالی خلاصہ II تعاقب کرتا ہے

C.दोन्ही निष्कर्ष निघतील
C.Both of them follow
C.وو دونوں تعاقب کرتے ہے

D.यातील एकही निष्कर्ष निघणार नाही
D.Neither of them follows
D.ان میں سے کوئی بھی تعاقب نہیں کرتا

Answer: C.दोन्ही निष्कर्ष निघतील
C.Both of them follow
C.وو دونوں تعاقب کرتے ہے

176 खालीलपैकी शुद्ध शब्द कोणता ?

A.ज्वालाग्राही

B.ज्वालाग्राहि

C.ज्वालग्राहि

D.ज्वालीग्राही

Answer: A.ज्वालाग्राही

177 एक व्यक्ती 10 मीटर पूर्वेकडे जाते आणि मग 24 मीटर उत्तरेकडे जाते. आरंभ बिंदूपासून अंतर काढा?

A man goes 10m due east and then 24m due north. Find the distance from the starting point?

ایک آدمی مشرق کی طرف 10 میٹر تک جاتا ہے اور اس کے بعد شمال کی طرف 24 میٹر جاتا ہے. ابتدائی نقطہ سے فاصلہ تلاش کریں؟

A.26 मी
A.26m
A. 26 میٹر

B.24 मी
B.24m
B.24 میٹر

C.28 मी
C.28m
C. 28 میٹر

D.30 मी
D.30m
D.30 میٹر

Answer: A.26 मी
A.26m
A. 26 میٹر

178 सूचना: खाली दिलेल्या प्रश्नात एक विधान आहे ज्याचे I आणि II असे दोन निष्कर्ष त्याखाली अंकित केलेले आहेत. या आधारे सर्वात योग्य पर्याय निवडा.

विधान:
सर्वोच्च न्यायालयाने गंगा नदीच्या काठावर होणाऱ्या धार्मिक विधींवर बंदी घातली आहे. X गंगा नदीच्या काठावर धार्मिक विधी करतो.

निष्कर्ष:
I. X दोषी आहे.
II. X दोषी नाही आहे.

DIRECTIONS: The question below has a statement followed by two conclusions numbered I and II. Based on this choose the option that is most suitable.

Statement:
Supreme Court has banned the holding of functions on the banks of river Ganga. X holds religious function on the banks of Ganga.

Conclusions:
I. X is guilty.
II. X is not guilty.

ہدایات: نیچے دیے گئے سوال میں ایک بیان کے بعد دو نتائج دیے گئے ہیں۔ اس کی بنیاد پرانتہائی موزوں آپشن کا انتخاب کیجیے۔ I اور II

بیان:
سپریم کورٹ نے گنگا دریا کے کنارے پر فنکشنز کے انعقاد پر پابندی عائد کردی ہے .X گنگا کے کنارے پر مذہبی فنکشن کا انعقاد کرتا ہے.

نتیجے:
I- X مجرم ہے.
II. X مجرم نہیں ہے.

A.केवळ निष्कर्ष क्रमांक I विधानास अनुसरून आहे
A.Only Conclusion I follows
A. صرف نتیجہ I لاگو ہو گا۔

B.केवळ निष्कर्ष क्रमांक II विधानास अनुसरून आहे
B.Only Conclusions II follows
B. صرف نتیجہ II لاگو ہو گا۔

C.निष्कर्ष क्रमांक I किंवा II अनुसरून आहे
C.Either I or II follows
C. I یا II میں سے ایک لاگو ہو گا۔

D.कोणताही निष्कर्ष अनुसरून नाही
D.Neither I nor II follow
D. I اور II میں سے کوئی بھی لاگو نہیں ہو گا۔

Answer: A.केवळ निष्कर्ष क्रमांक I विधानास अनुसरून आहे
A.Only Conclusion I follows
A.صرف نتیجہ I لاگو ہو گا۔

179 सूचना: प्रत्येक प्रश्नाला एक प्रमुख विधानासोबत चार विधाने आहेत ज्यांच्याखाली A, B, C आणि D असे चार विधान आहेत. क्रमवार विधानांची जोडी निवडा ज्यामध्ये प्रथम विधान दुसऱ्या विधानाला सुचवते, आणि दोन्ही विधाने तर्किकदृष्ट्या प्रमुख विधानासोबत निगडित असेल.

जर तुम्ही निवडणुक प्रामाणिकपणे लढवली, तर आपण निवडणूक जिंकू शकाल
A. तुम्ही प्रामाणिकपणे निवडणुक लढवली
B. तुम्ही प्रामाणिकपणे निवडणुक लढवली नाही
C. तुम्ही निवडणूक जिंकली
D. तुम्ही निवडणूक जिंकली नाही

DIRECTIONS: Each question has a main statement followed by four statements labelled A, B, C and D. Choose the ordered pair of statements, where the first statement implies the second, and the two statements are logically consistent with the main statement.

If you contest election fairly , you will win the election
A. you contested election fairly
B. you did not contest election fairly
C. you won the election
D. you did not win the election

ہدایت: ہر سوال میں ایک جملہ ہے جسکے بعد چار جملےاے، بی،سی اور ڈی کے نام سے دئے گئے ہیں اسمیں منسلک جوڑیوں کو چنئے۔ جہاں پہلا جملہ دوسرے جملہ کی اور اشارہ کر رہا ہے اور دو جملے منطقی مرکزی بیان کے مطابق ہیں

اگر آپ فیئر الیکشن لڑیں تو الیکشن جیت جائیں گے
A آپ نے فیئر الیکشن لڑا ۔
B آپ نے فیئر الیکشن نہیں لڑا ۔
C آپ الیکشن جیتے ۔
D آپ الیکشن نہیں جیتے ۔

A.AB
A.AB
A.AB

B.BC
B.BC
B.BC

C.DA
C.DA
C.DA

D.DB
D.DB
D.DB

Answer: D.DB
D.DB
D.DB

180

$(?)^3 = 512$

$(?)^3 = 512$

$(?)^3 = 512$

A.3
A.3
A.3

B.7
B.7
B.7

C.2
C.2
C.2

D.8
D.8
D.8

Answer: D.8
D.8
D.8

181 वाघसंरक्षणाची सर्वात जास्तसंख्या येथे आहे:

The largest number of Tiger Reserves are located in :

ٹائیگر ریزرو کی سب سے بڑی تعداد صوبہ ------ میں موجود ہیں:

A.हिमाचल प्रदेश
A.Himachal Pradesh
A. ہماچل پردیش

B.मध्यप्रदेश
B.Madhya Pradesh
B. مدھیہ پردیش

C.उत्तर प्रदेश
C.Uttar Pradesh
C. اتر پردیش

D.यापैकी एकही नाही
D.None of these
D. ان میں سے کوئی بھی نہیں

Answer: B.मध्यप्रदेश
B.Madhya Pradesh
B. مدھیہ پردیش

182 दिलेल्या पर्यायांपैकी वेगळे ते निवडा:

Select the odd one out from the given options:

دیے گئے اختیارات میں سے بے جوڑ کو منتخب کریں:

A.टेबल
A.Table
A.ٹیبل

B.कपाट
B.wardrobe
B.الماری

C.खुर्ची
C.Chair
C.کرسی

D.घर
D.House
D.گھر

Answer:	D.घर D.House D.گھر

183	100 इंच = _____सेमी 100 inches = _____cm 100 سینٹی میٹر_____ = انچ
	A.25.4 सेमी A.25.4 cm A.25.4 سینٹی میٹر
	B.0.254 सेमी B.0.254 cm B.0.254 سینٹی میٹر
	C.2.54 सेमी C.2.54 cm C.0.54 سینٹی میٹر
	D.254 सेमी D.254 cm D.254 سینٹی میٹر
Answer:	D.254 सेमी D.254 cm D.254 سینٹی میٹر

184	‘ अन्नास मोताद होणे ‘ या वाक्प्रचाराचा अर्थ काय ?
	A.उपासमार होणे
	B.भरपूर अन्न मिळणे
	C.गरिबांना जेवण देणे
	D.ब्राह्मणास भोजन देणे
Answer:	A.उपासमार होणे

185 Out of the given four words only one is not spelt correctly. Find the word that is not correctly spelt.

A.Existance

B.Experience

C.Explanation

D.Eminent

Answer: A.Existance

186 खालीलपैकी स्त्रीलिंगी शब्द ओळखा.

A.रेखा

B.रेघ

C.रेषा

D.वरील सर्व

Answer: D.वरील सर्व

187 **सूचनाः** दिलेल्या आकृतीमध्ये वर्तुळ हुशार पुरुष दर्शवते, चौरस अनुभवी पुरुष दर्शवतो, त्रिकोण शिक्षक दर्शवतो. कोणता प्रदेश शिक्षक दर्शवतो जे हुशार तसेच अनुभवी आहेत?

DIRECTIONS: In the given diagram, Circle represents Wise men, Square represents experienced men, Triangle represents Teachers. Which region represents Teachers who are, Wise as well as Experienced?

ہدایات: دیئے ہوئے ڈایاگرام میں، دایرہ حکمت والے مردوں کی نمائندگی کرتا ہے، چوک تجربہ کار مردوں کی نمائندگی کرتا ہے، مثلث اساتذہ کی نمائندگی کرتا ہے. کونسا حصّہ ان اساتذہ کی نمائندگی کرتا ہے جو حکمت والے اور تجربہ کار ہیں؟

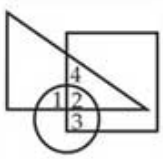

A. 1

B. 3

C. 4

D. 2

Answer: D. 2

188 थिंपू ही _____ ची राजधानी आहे

Thimpu is the capital of –

تھمپو راجدھانی ہے۔

A.नेपाळ
A.Nepal
A.نیپال کی

B.म्यानमार
B.Myanmar
B.میانمار کی

C.भूतान
C.Bhutan
C.بھوٹان کی

D.तिबेट
D.Tibet
D.تبت کی

Answer: C.भूतान
C.Bhutan
C.بھوٹان کی

189 _____ टाळण्यासाठी, एसएडी असणारी मुलं त्रागा करतात किंवा आत्महत्येचे प्रयत्न करतात.

To avoid _____ ,children with SAD will throw tantrums or make suicidal gestures

_____ سے بچنے کے لئے، ایس اے اے کے بچوں کو ٹینٹ پھینک دیں گے یا خودکش اشارے بنائے جائیں گے

A.एकांतवास
A.Seclusion
A.سیکشن

B.विभक्तता
B.Segregation
B.مجموعی

C.वेगळे करणे
C.Separation
C.علیحدگی

D.शाळा
D.School
D.سکول

Answer: C.वेगळे करणे
C.Separation
C.علیحدگی

190 DIRECTIONS: A sentence with an underlined phrasal verb is given below. Out of the four options, choose the one which can be substituted for the given phrasal Verb.
Rahul backed out of his commitment.

A.withdrew

B.moved forward

C.confirmed

D.encouraged

Answer: A.withdrew

191 सरळ रूप द्या:
2423 – 1319 + 5432 – 2345 + 1234 =?

Simplify:
2423 – 1319 + 5432 – 2345 + 1234 =?

آسان بنائیں:
2423 – 1319 +5432 – 2345 + 1234= ?

A.1245
A.1245
A.1245

B.5425
B.5425
B.5425

C.7825
C.7825
C.7825

D.9847
D.9847
D.9847

Answer: B.5425
B.5425
B.5425

192 पुढील म्हण पूर्ण करा - ‘ गोगल गाय अन् --------- पाय ‘

A.मागे

B.पुढे

C.डोक्यावर

D.पोटात

Answer: D.पोटात

193 सिंधू संस्कृतीमध्ये सर्वप्रथम कशाची लागवड केली गेली –

The Indus Valley Civilization is known to have cultivated the first –

انڈس ویلی سویلائزیشن نے سب سے پہلے کھیتی کی۔

A.कापूस
A.Cotton
A.کاٹن کی

B.रेशीम
B.Silk
B.سلک کی

C.नायलॉन
C.Nylon
C.نائلون کی

D.यांपैकी कोणतेही नाही
D.None of these
D.ان میں سے کوئی نہیں

Answer:	A.कापूस A.Cotton A.کاٹن کی

194	1.5723 × 1000 = ? 1.5723 × 1000 = ? 1.5723 × 1000 = ?
	A.1472.3 A.1472.3 A.1472.3
	B.1572.3 B.1572.3 B.1572.3
	C.1672.3 C.1672.3 C.1672.3
	D.1771.3 D.1771.3 D.1771.3
Answer:	B.1572.3 B.1572.3 B.1572.3

195	दीपक उत्तरेला जातो, उजवीकडे वळतो आणि पुन्हा उजवीकडे वळून मग डावीकडे जातो. दीपक आता कोणत्या दिशेला आहे? Deepak go North, turn right and again turn right then go to the left. In which direction is Deepak now? دیپک شمال کی سمت جاتا ہے اور پھر داہنی جانب مڑتا ہے اور پھر داہنی جانب گھوم جاتا ہے اور بائیںطرف چلتا ہے- دیپک اب کس سمت میں ہے؟
	A.दक्षिण A.South A.جنوب

For More Info And Videos About TAIT-Exam Syllabus And Other Exam Visit My Channel
TAIT च्या 30 प्रश्नपत्रिका PDF
BADSHAHimp Available Request 9765226781
WWW.YouTube.com/BADSHAHimp
Subscribe My Channel

B.पश्चिम
B.West
B.مغرب

C.उत्तर
C.North
C.شمال

D.पूर्व
D.East
D.مشرق

Answer: D.पूर्व
D.East
D.مشرق

196 0.76 × 1285 = 0.35 × 1256 + ?

0.76 × 1285 = 0.35 × 1256 + ?

0.76 × 1285 = 0.35 × 1256 + ?

A.543
A.543
A.543

B.537
B.537
B.537

C.547
C.547
C.547

D.533
D.533
D.533

Answer: B.537
B.537
B.537

For More Info And Videos About TAIT-Exam Syllabus And Other Exam Visit My Channel
TAIT च्या 30 प्रश्नपत्रिका PDF
BADSHAHimp Available Request 9765226781
WWW.YouTube.com/BADSHAHimp
Subscribe My Channel

197 सूचनाः दिलेल्या पर्यायांमधून ऍनालॉगस शब्द निवडा.

अलिसचा संबंध एल. कॅरोलसोबत आहे जसा गुलिवरचा ...सोबत आहेः

DIRECTIONS: Choose the analogous word from the given alternatives.

Alice is to L.Carroll as Gulliver is to:

ہدایات: دیے گئے متبادل سے مطابق لفظ کا انتخاب کریں.

ایلس کا ویسا ہی تعلق ہے ایل. کارول کے ساتھ جیسا کہ گلیور کا ---------- کے ساتھ .

A.डब्ल्यू. कोलिन्स
A.WCollins
A. ڈبلو.کولنز

B.जे. स्विफ्ट
B.J.Swift
B. جے.سوفٹ

C.सी. डिकन्स
C.C.Dickens
C. سی.ڈکنز

D.इ. ए. पो
D.E.A.Poe
D. ای.اے.پو

Answer: B.जे. स्विफ्ट
B.J.Swift
B. جے.سوفٹ

198 गहाळ वर्ण शोधा?
Find the missing character?
گمنام حرف کھوجیے ۔

B	C	E	G	?

A. Q

B. L

C. P

D. K

Answer: D. K

For More Info And Videos About TAIT-Exam Syllabus And Other Exam Visit My Channel
TAIT च्या 30 प्रश्नपत्रिका PDF
BADSHAHimp Available Request 9765226781
WWW.YouTube.com/BADSHAHimp
Subscribe My Channel

199 एका विशिष्ट सांकेतिक भाषेमध्ये, जर IMPEND = 61 आणि DISH = 40 असा कूटबध्द केला जात असेल, FRUIT =?

In a certain code language, if IMPEND = 61 and DISH = 40, then FRUIT =?

ایک مخصوص ضابطے کی زبان میں، اگر IMPEND = 61 اور 40= DISH تو FRUIT=

A.86
A.86
A.86

B.68
B.68
B.68

C.74
C.74
C.74

D.76
D.76
D.76

Answer: C.74
C.74
C.74

200 निर्देश: खालीलपैकी प्रत्येक प्रश्नात, मालिकेमधील एक संख्या चुकीची आहे. चुकीची संख्या शोधा.
4, 9, 14, 19, 24, 29, 37

DIRECTION: In each of the following questions, one number is wrong in the series. Find out the wrong number.

4, 9, 14, 19, 24, 29, 37

ہدایت ہر سوال میں یک نمبر غلط ہے . اس غلط نمبر کو کھوجے .

4, 9, 14, 19, 24, 29, 37

A.9
A.9
A.9

B.19
B.19
B.19

For More Info And Videos About TAIT-Exam Syllabus And Other Exam Visit My Channel
TAIT च्या 30 प्रश्नपत्रिका PDF
BADSHAHimp Available Request 9765226781
WWW.YouTube.com/BADSHAHimp
Subscribe My Channel

C.24
C.24
C.24

D.37
D.37
D.37

Answer: D.37
D.37
D.37

For More Info And Videos About TAIT-Exam Syllabus And Other Exam Visit My Channel
TAIT च्या 30 प्रश्नपत्रिका PDF
BADSHAHimp Available Request 9765226781
WWW.YouTube.com/BADSHAHimp
Subscribe My Channel

Question Paper Title : TAIT_PAPER_4

Date of Exam : 2017-12-14 12:30:00.0

1	पुढील म्हण पूर्ण करा - '---------- करी काम.'
	A.दाम
	B.नोकर
	C.कृष्ण
	D.राम
Answer:	A.दाम

2	**सूचना**: खालील प्रश्नात उत्तरातील पर्यायांपैकी कोणत्या पर्यायी आकृतीत प्रश्नातील आकृती अंतर्भूत आहे? **DIRECTIONS:** In the given question find the answer figure in which question figure is embedded. ہدایات دیئے گئے سوال میں، جواب کی شکل کو دریافت کیجیئے جو سوال میں سرایت کر گئی ہے۔ **Question Figure** **Answer Figures** 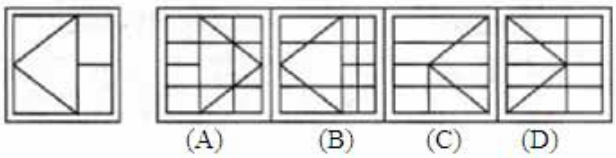 (A) (B) (C) (D)
	A. (A)
	B. (B)
	C. (C)
	D. (D)
Answer:	B. (B)

For More Info And Videos About TAIT-Exam Syllabus And Other Exam Visit My Channel
BADSHAHimp SubScribe Like & Share YouTube WWW.YouTube/BADSHAHimp

3 सूचना: दोन विधाने आणि त्यानंतर दोन निष्कर्ष, I आणि II दिले आहेत. ही विधाने सामान्यतः ज्ञात वस्तुस्थितीपेक्षा भिन्न असली तरी सत्य आहेत असे समजा. दिलेल्यापैकी कोणता निष्कर्ष दिलेल्या विधानांवरुन नक्की काढता येऊ शकतो हे तुम्ही ठरवायचे आहे.तुमचे उत्तर सूचित करा.

विधाने:
एकही पुरुष बुद्धिमान नाही.
सर्व स्त्रिया बुद्धिमान आहेत.
निष्कर्ष:
I. एकही पुरुष स्त्री नाही
II. एकही स्त्री पुरुष नाही.

DIRECTION: Two statements are given following by two conclusions, I, and II. You have to consider that statements to be true, even if they seem to be at variance from commonly known facts. You are to decide which of the given conclusions can definitely be drawn from the given statements. Indicate your answer.

Statements:
No man is intelligent.
All women are intelligent.

Conclusion:
I. No man is a woman.
II. No woman is a man.

ہدایات: دو سٹیٹمنٹ جوکہ دو خلاصوں پر مشتمل ہیں .I اور II .اپ کو وہ سٹیٹمنٹ درست ماننا ہے، اگرچہ دکہنے میں وہ بہت سارے حقاٰئق ست مطبقت رکہتی ہو۔ اپ کو دیے گے خلاصوں میں سے یقینی طور پر اسے اختیار کرنا ہے جو سٹیٹمنٹ سے نکلا ہو. اپنا جواب تلاش کرے.

اظہار بیان:
کوی ادمی صلاحیت مند نہیں ہے
تمام عارتیں صلاحیت مند ہیں

نتائج:
I.کوی مرد عورت نہیں ہے۔
II.کوی عورت مرد نہیں ہے۔

A.केवळ I निष्कर्ष निघेल
A.Only I follow
A.صرف I درست ہے

B.केवळ II निष्कर्ष निघेल
B.Only II follows
B.صرف II درست ہے

C.दोन्ही I & II निष्कर्ष निघेल
C.Both I & II follow
C.I اور II دونوں درست ہیں

D.एकही निष्कर्ष निघणार नाही
D.Neither of them follow
D.ان میں سے کوی بہی درست نہیں ہے

Answer: C.दोन्ही I & II निष्कर्ष निघेल
C.Both I & II follow
C.I اور II دونوں درست ہیں

4 खालीलपैकी कोणते देश आहेत?

Which of the following are countries?

درج ذیل میں سے کونسے ممالک ہیں؟

A.नौरु
A.Nauru
A.ناؤرو

B.कुक बेट
B.Cook Island
B.کوک آئلینڈ

C.हे दोन्ही
C.Both of these
C.ان میں سے دونوں

D.यांपैकी कोणतेही नाही
D.None of these
D.ان میں سے کوئی نہیں

Answer: C.हे दोन्ही
C.Both of these
C.ان میں سے دونوں

5 हे शिकण्यात शाब्दिक मार्गदर्शन कुचकामी आहे

Verbal guidance is least effective in the learning of

زبانی ہدایات سب سے کم موثر ہے اس کے سیکھنے میں

A.कल
A.aptitudes
A.رغبت

B.कौशल्ये
B.skills
B.مہارت

For More Info And Videos About TAIT-Exam Syllabus And Other Exam Visit My Channel
BADSHAHimp SubScribe Like & Share YouTube WWW.YouTube/BADSHAHimp

C.वृत्ती
C.attitudes
C.رویہ

D.नाती
D.relationship
D.رشتہ

Answer: B.कौशल्ये
B.skills
B.مہارت

6 सागरी कासवांपैकी कोणत्या प्रजाती सर्वात लोकप्रिय आहेत?

Which species of sea-turtles is the most populous species?

سمندری کچھوے کی کونسی نسل سب سے زیادہ آبادی والی نسل سے ہے؟

A.केम्प चे रिडले
A.Kemp's Ridley
A. کیمپس رڈلی

B.लॉगरहेड
B.Loggerhead
B.لاگرہیڈ

C.ऑलिव्ह रिडले
C.Olive Ridley
C.آلو ریڈلی

D.फ्लॅट बॅक
D.Flatback
D.فلیٹ بیک

Answer: C.ऑलिव्ह रिडले
C.Olive Ridley
C.آلو ریڈلی

7 त्रिकोण ABC मध्ये, सर्व बाजूंची लांबी भिन्न आहे त्याला म्हणतात--?

In a triangle ABC, all side are different in length is called-----?

جس میں، ہر طرف کی لمبائی مختلف ہیں ----- مثلث ABC؟

For More Info And Videos About TAIT-Exam Syllabus And Other Exam Visit My Channel
BADSHAHimp SubScribe Like & Share YouTube WWW.YouTube/BADSHAHimp

A.विषमभुज
A.Scalene
A.مختلف الاضلاع

B.समद्विभुज
B.Isosceles
B.متساوی الساقین

C.समभुज
C.Equilateral
C.متساوی الاضلاع

D.यांपैकी कोणतेही नाही
D.None of these
D.کوئی نہیں

Answer:
A.विषमभुज
A.Scalene
A.مختلف الاضلاع

8

निर्देश: खालील शब्दांची इंग्रजी शब्दकोशानुसार मांडणी करा.

(1) Save
(2) Sausage
(3) Saviour
(4) Savour
(5) Savage

DIRECTIONS: Arrange the following words according to the English Dictionary.
(1) Save
(2) Sausage
(3) Saviour
(4) Savour
(5) Savage

ہدایات: انگریزی لغت کے مطابق مندرجہ ذیل الفاظ کو مرتب کریں۔
(1) Save
(2) Sausage
(3) Saviour
(4) Savour
(5) Savage

A.5, 4, 2, 3, 1
A.5, 4, 2, 3, 1
A.5, 4, 2, 3, 1

For More Info And Videos About TAIT-Exam Syllabus And Other Exam Visit My Channel
BADSHAHimp Subscribe Like & Share YouTube WWW.YouTube/BADSHAHimp

	B.2, 5, 1, 3, 4 B.2, 5, 1, 3, 4 B.2, 5, 1, 3, 4
	C.2, 3, 4, 1, 5 C.2, 3, 4, 1, 5 C.2, 3, 4, 1, 5
	D.3, 2, 1, 5, 4 D.3, 2, 1, 5, 4 D.3, 2, 1, 5, 4
Answer:	B.2, 5, 1, 3, 4 B.2, 5, 1, 3, 4 B.2, 5, 1, 3, 4

9	प्रश्नासाठी सूचना: खालील मालिका पूर्ण करा. E, J, O,T, Y,_____ DIRECTION: Complete the following series. E, J, O,T, Y,_____ سوال کے لیے ہدایت:مندرجہ ذیل سیریز کو مکمل کریں۔ E, J, O, T, Y _____,
	A.D A.D A.D
	B.Z B.Z B.Z
	C.C C.C C.C
	D.E D.E D.E

For More Info And Videos About TAIT-Exam Syllabus And Other Exam Visit My Channel
BADSHAHimp Subscribe Like & Share YouTube WWW.YouTube/BADSHAHimp

Answer: A.D
A.D
A.D

10 निर्देश: खालीदिलेल्या अक्षराच्या क्रमात काही अक्षरे गहाळ केली आहेत ते त्या क्रमाने खाली दिलेल्या पर्यायांपैकी एक आहे

a_a _ aaa _ _ baa

DIRECTIONS: In each of the following letter series, same of the letters are missing which are given in that order as one of the alternatives below it.

a_a _ aaa _ _ baa

دایت جیل کے حرف سرج میں کوئی حرف گمشدہ ہے آپکو انکی شناخت جیل کے اختیارات سے کرنی ہے

a_a _ aaa _ _ baa

A.bbaa
A.bbaa
A.bbaa

B.bbba
B.bbba
B.bbba

C.baaa
C.baaa
C.baaa

D.baab
D.baab
D.baab

Answer: B.bbba
B.bbba
B.bbba

11 कोणते ऐतिहासिक स्मारक अवकाशातून दृश्य आहे(दिसले)?

Which historical monument is visible from outer space?

بیرونی خلاء سے کونسا یاد گار نظرآتا ہے؟

For More Info And Videos About TAIT-Exam Syllabus And Other Exam Visit My Channel
BADSHAHimp SubScribe Like & Share YouTube WWW.YouTube/BADSHAHimp

A.ताज महाल
A.Taj Mahal
A.تاج محل

B.पीसाचा कलता मनोरा
B.Leaning Tower of Pisa
B.لیننگ ٹاور آف پیسا

C.ग्रेट वॉल ऑफ चायना
C.Great Wall of China
C.چین کی دیوار عظیم

D.यांपैकी कोणतेही नाही
D.None of these
D.ان میں سے کوئی نہیں

Answer:
D.यांपैकी कोणतेही नाही
D.None of these
D.ان میں سے کوئی نہیں

12 निर्देश: खालील प्रश्नांमध्ये प्रश्न चिन्हाच्या (?) जागी कोणते अंदाजे मूल्य यायला हवे? (तुम्ही अचूक मूल्य काढण्याचे अपेक्षित नाही).
1562÷0.24 × 356=?

DIRECTIONS: What approximate value should come in place of the question mark (?) in the following questions? (You are not expected to calculate the exact value)

1562÷0.24 × 356=?

ہدایات: مندرجہ ذیل سوال میں سوال کا نشان (?) کی جگہ پر کون سا تخمینہ ویلیو آئے گا -
(آپ کو صحیح ویلیو نکالنے کی ضرورت نہیں ہے)
1562÷0.24 × 356=?

A.24
A.24
A.24

B.18
B.18
B.18

C.12
C.12
C.12

D.28
D.28
D.28

Answer: B.18
B.18
B.18

13 सूचना: अर्थपूर्ण परिच्छेद निर्माण करण्यासाठी, खाली दिलेली (P), (Q) (R), (S) आणि (T) ही पाच वाक्ये योग्य अनुक्रमाने पुनर्रचना करा; त्यांनतर खालील प्रश्नांची उत्तर द्या.
P. कामगाराने मुलाच्या ओरडण्याचा आवाज ऐकला.
Q. तो मदतीसाठी ओरडत होता.
R. मुलगा बुडत होता.
S. त्याने नदीत उडी मारली
T. त्याने स्वतःचे आयुष्य धोक्यात घालून मुलाला वाचविले.

पुनर्रचना केल्यानंतर खालीलपैकी कोणते वाक्य पहिले असेल?

DIRECTION: Rearrange the following five sentences (P), (Q), (R), (S) and (T) in the proper sequence to form a meaningful paragraph; then answer the questions given below them.
P. A workman heard the boy's shouts.
Q. He shouted for help.
R. The boy was drowning.
S. He plunged into the river.
T. He risked his own life and saved the boy.

Which of the following should be the FIRST sentence after rearrangement?

ہدایات: ان پانچ جملوں (P)، (Q)، (R)، (S) اور (T) کو با معنی پیرا بنانے کے لئے دوبارہ ترتیب دیجئے، پھر نیچے دے گئے سوالوں کے جواب دیجئے

P. ایک مزدور نے بچھے کی چیکھے سنی.
Q. وو مدد کے لئے چلایا.
R. بچہ ڈوب رہا تھا.
S. وو دریا میں کود گیا.
T. اسنے اپنی جان کا جوکھم اٹھایا اور بچے کو بچایا.

دوبارہ ترییب دینے کے بعد کون سا جملہ پہلے ہونا چاہیے؟

A.R
A.R
A.R

B.P
B.P
B.P

For More Info And Videos About TAIT-Exam Syllabus And Other Exam Visit My Channel
BADSHAHimp SubScribe Like & Share YouTube WWW.YouTube/BADSHAHimp

C.S
C.S
C.S

D.T
D.T
D.T

Answer: A.R
A.R
A.R

14 $\frac{(m-n)^3+(n-r)^3+(r-m)^3}{6(m-n)(n-r)(r-m)}=?$

A. 1/2

B. 1/3

C. 1/5

D. 1/6

Answer: A. 1/2

15 सामान्य व्यक्तीमध्ये प्रति मिनिट सरासरी हृदयच्या ठोक्याचा दर असतो

The average heart beat rate per minute in a normal person is

ایک عام انسان کے دل کی دھڑکن شرح فی منٹ ہو تی ہے

A.82
A.82
A.82

B.80
B.80
B.80

C.72
C.72
C.72

D.88
D.88
D.88

Answer: C.72
C.72
C.72

16 सूचना: खालील प्रश्नात उत्तरातील पर्यायांपैकी कोणत्या पर्यायी आकृतीत प्रश्नातील आकृती अंतर्भूत आहे?

DIRECTIONS: In the given question find the answer figure in which question figure is embedded.

ہدایات دیئے گئے سوال میں جواب والی شکل دریافت کیجیئے جس میں سوال والی شکل سرایت کرگئی ہے۔

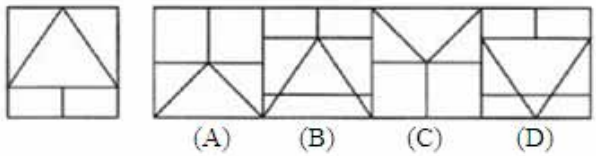

A. (A)

B. (B)

C. (C)

D. (D)

Answer: D. (D)

17 आपल्या सौर यंत्रणेमधील सर्वांत मोठा ग्रह हा आहे –

The biggest planet in our solar system is –

نظام شمسی میں سب سے بڑا سیارہ _____ ہے

A.शुक्र
A.Venus
A.وینس

B.बुध
B.Jupiter
B.جیوپیٹر

C.शनि
C.Saturn
C.سیٹرن

D.युरेनस
D.Uranus
D. یورینس

Answer: B.बुध
B.Jupiter
B.جیوپیٹر

18 A हा B चा मुलगा आहे. C, Bची बहीण असून तिला एक मुलगा D आणि मुलगी E आहे. F हा D चा मामा आहे. मग F ला किती पुतणे आहेत?

A is the son of B. C, B's sister has a son D and a daughter E. F is the maternal uncle of D. How many nephews does F have?

B A کا بیٹا ہے. B کی بہن، C کا بیٹا D اور بیٹی E ہے. D F کا ماما ہے. F کے کتنے بھانجے ہے؟

A.एकही नाही
A.Nil
A.کچھ نہیں

B.एक
B.One
B.ایک

C.दोन
C.Two
C.دو

D.तीन
D.Three
D.تین

Answer: C.दोन
C.Two
C.دو

19 Out of the given options, choose the most appropriate one to fill in the blank.
The mason _____the wall.

A.is building

B.are build

C.are built

D.were built

Answer: A.is building

20 सूचना: खालील दिलेल्या प्रश्नामध्ये काही विधाने आणि काही निष्कर्ष आहेत. सामन्यात: ज्ञात तथ्यांपेक्षा ते वेगळे असतील तर दिलेली विधाने तुम्हाला सत्य मानवी लागतील आणि त्यानंतर दिलेल्या विधानाचे अनुकरण दिलेल्यापैकी कोणता निष्कर्ष तार्किकदृष्ट्या करतो ते ठरवा.

विधान:
T ≥ O = I ≥ L = D
निष्कर्ष :
I. D < T
II. D = T

DIRECTIONS: In the question below, there are few statements followed by few conclusions. You have to take the given statements to be true even if they seem to be at variance with commonly known facts and then decide which of the given conclusion logically follow(s) from the given statements.

Statement:
T ≥ O = I ≥ L = D
Conclusions:
I. D < T
II. D = T

ہدایات: مندرجہ ذیل سوال میں، کچھ بیانات کے بعد کچھ نتائج موجود ہیں. اگر آپ کو عام طور پر جانے جاتے حقائق کے ساتھ بھی متغیر ہونے لگے تو بھی آپ دئے گئے بیانات دماغ میں رکھیں اور پھر اس بات کا فیصلہ کریں کہ ذیل میں دیا گیا کونسا نتیجہ منطقانہ طور پر دیے گئے بیانات کی پیروی کرتا ہے.

بیان:
T > O = I > L = D
نتائج:
D < T .I
D = T .II

A.फक्त I निष्कर्ष खरा आहे
A.Only conclusion I is true
A.صرف نتیجہ I درست ہے

B.फक्त II निष्कर्ष खरा आहे
B.Only conclusion II is true
B.صرف نتیجہ II درست ہے

C.I किंवा II यापैकी एक निष्कर्ष खरा आहे
C.Either Conclusion I or II is true
C.یا I یا II نتیجہ درست ہے

D.I व II हे दोन्हीही निष्कर्ष खरे नाहीत
D.Neither conclusion I nor II is true
D.نہ ہی I نہ ہی II نتیجہ درست ہے

Answer: C.I किंवा II यापैकी एक निष्कर्ष खरा आहे
C.Either Conclusion I or II is true
C.یا I یا II نتیجہ درست ہے

21 जेव्हा तुमचा घरमालक बेसुमारपणे पिण्याचे पाणी आणि वीज वापरत असतो परंतु तुम्ही सर्व ती काळजी घेऊनही तुमच्यावर टिका केली जाते, तेव्हा तुम्ही— चा विचार करता

When your land-lord exorbitantly use the drinking water and electricity but you are being criticized inspite of all the precautions, then you think—

جب آپ کا مالک مکان پینے کا پانی اور بجلی کا فضول استعمال کرتا ہے لیکن آپ تمام احتیاطی تدابیر کے باوجود تنقید کا شکار رہتے ہیں —

A.त्यांच्या अज्ञानाचा
A.Of their ignorance
A.ان کی جہالت سے

B.एक घर-मालक असण्याचा
B.Of being a land-lord
B.مالک مکان ہونے کا

C.असमंजसपणाचा
C.Of irrationality
C.غیر منطقی

D.त्यांच्या प्राथमिकतांचा
D.Of their priorities
D.ان کی ترجیحات کا

Answer: C.असमंजसपणाचा
C.Of irrationality
C.غیر منطقی

For More Info And Videos About TAIT-Exam Syllabus And Other Exam Visit My Channel
BADSHAHimp SubScribe Like & Share YouTube WWW.YouTube/BADSHAHimp

22 सूचना: या प्रत्येक प्रश्नांमध्ये दोन विधानांनंतर दोन निष्कर्ष येतात ज्यांना I आणि II असे अंकित केले आहे. जरी सामान्यपणे माहीत असलेल्या तथ्यांबरोबर जुळत नसले तरी खालील विधाने बरोबर आहेत असे समजून तुमचे योग्य उत्तर लिहा.
निवेदन:
सर्व तुरुंग अतिथीगृहे आहेत.
सर्व अतिथीगृहे आरामदायक आहेत.
निष्कर्ष:
I. सर्व तुरुंग आरामदायक आहेत.
II. कोणताही तुरुंग आरामदायक नाही.

DIRECTION: In each of these questions, two statements are followed by two conclusions numbered I and II. Assume the given statements to be true, even if they seem to be of variance with commonly known facts and then mark your answer as.

Statements:
All jails are guest houses.
All guest houses are

comfortable.
Conclusions:
I. All jails are comfortable.
II. No jail is comfortable.

ہدایت:ان میں سے ہر ایک سوال میں، دو بیانات کے بعد دو نتیجے نمبر I اور II دیے گئے ہیں۔ دیے گئے بیانات کو درست تسلیم کریں، اگرچہ وہ عام طور پر معلوم حقائق کے برعکس نظر آتے ہوں اور پھر اس کے مطابق اپنا جواب نشان زد کریں۔

بیانات:
تمام جیل مہمان خانے ہیں۔
تمام مہمان خانے آرام دہ ہیں۔

حل:
I. تمام جیل آرام دہ ہیں۔
II. کوئی جیل آرام دہ نہیں ہے۔

A.जर केवळ निष्कर्ष I निघत असल्यास.
A.If only conclusion I follows
A.صرف نتیجہ I پیروی کرتا ہے۔

B.जर केवळ निष्कर्ष II निघत असल्यास.
B.If only conclusion II follows
B.صرف نتیجہ II پیروی کرتا ہے۔

C.जर दोन्ही निष्कर्ष निघत असल्यास.
C.If both the conclusions follow
C.دونوں نتیجے پیروی کرتے ہیں۔

D.जर दोन्ही निष्कर्ष I आणि II निघत नसल्यास.
D.If neither I nor II follows
D.نہ تو I نہ ہی II پیروی کرتا ہے۔

Answer: A.जर केवळ निष्कर्ष I निघत असल्यास.
A.If only conclusion I follows
A.صرف نتیجہ I پیروی کرتا ہے۔

23 620, 740 आणि 1280 चा मसावी काढा?

The HCF of 620, 740 & 1280?

620، 740 کے 1280 اور HCF ؟

A.10
A.10
A.10

B.20
B.20
B.20

C.30
C.30
C.30

D.35
D.35
D.35

Answer: B.20
B.20
B.20

24 सूचना: प्रत्येक प्रश्नाला एक प्रमुख विधानासोबत चार विधाने आहेत ज्यांच्याखाली A, B, C, आणि D असे चार विधान आहेत. क्रमवार विधानांची जोडी निवडा ज्यामध्ये प्रथम विधान दुसऱ्या विधानाला सुचवते, आणि दोन्ही विधाने तर्किकदृष्ट्या प्रमुख विधानासोबत निगडित असेल.

तुम्ही एकतर जबाबदार किंवा कठोर
आहात
A. तुम्ही जबाबदार आहात.
B. तुम्ही जबाबदार नाहीत.
C. तुम्ही कठोर आहात.
D. तुम्ही कठोर नाहीत.

DIRECTIONS: Each question has a main statement followed by four statements labelled A, B, C and D. Choose the ordered pair of statements, where the first statement implies the second, and the two statements are logically consistent with the main statement.

You are either responsible or callous.
A. You are responsible
B. You are not responsible
C. You are callous
D. You are not callous

ہدایت: ہر سوال میں ایک جملہ ہے جسکے بعد چار جملےاے، بی،سی اور ڈی کے نام سے دئے گئے ہیں اسمیں منسلک جوڑیوں کو چنئے۔ جہاں پہلا جملہ دوسرے جملہ کی اور اشارہ کر رہا ہے اور دو جملے منطقی مرکزی بیان کے مطابق ہیں

آپ یا تو ذمہ دار ہیں یا لاپرواہ
A۔ آپ ذمہ دار ہیں
B۔ آپ ذمہ دار نہیں ہیں
C۔ آپ لاپرواہ ہیں
D۔ آپ لاپرواہ نہیں ہیں

A.AC
A.AC
A.AC

B.DA
B.DA
B.DA

C.CB
C.CB
C.CB

D.AB
D.AB
D.AB

Answer: B.DA
B.DA
B.DA

25 उच्चपणे दिशादर्शक असलेल्या किरण पुंजाला म्हणतात:

Light beam which is highly directional is called:

لائٹ بیم جوکہ انتہائی سمت نما ہوتا ہے کہاجا تا ہے:

A.इरेजर
A.Eraser
A.ایریزر

B.ग्रेजर
B.Grazer
B.گریزر

C.मासर
C.Maser
C.میزر

D.लेजर
D.Laser
D.لیزر

Answer: D.लेजर
D.Laser
D.لیزر

26 वृत्ती, संकल्पना, कौशल्ये व ज्ञान ही याची फलिते आहेत

Attitudes, concept, skills and knowledge are products of

رویہ، طرز فکر، مہارت اورجانکاری کس کی پیداوار ہیں

A.शिकणे
A.learning
A.علم

B.संशोधन
B.research
B.تحقیق

C.वंशपरंपरा
C.heredity
C.وراثتی

D.स्पष्टीकरण
D.explanation
D.وضاحت

Answer: A.शिकणे
A.learning
A.علم

27 34% चे अपूर्णांकात रुपांतर करा

Convert 34% into fraction?

34؟فیصد کوحصہ میں تبدیل کیجئے

A.17/50
A.17/50
A.17/50

B.19/25
B.19/25
B.19/25

C.17/25
C.17/25
C.17/25

D.19/50
D.19/50
D.19/50

Answer: A.17/50
A.17/50
A.17/50

28 निर्देश: खाली दिलेले प्रश्न वर्ण मालिकेवर आधारित आहेत. या प्रत्येक मालिकेत, काही अक्षरे गहाळ आहेत. योग्य पर्याय निवडा पाच पेक्षा अधिक अक्षरे गहाळ असल्यास, मालिकेतील शेवटचे पाच अक्षरे निवडा .

n - mnp - - p - npmn - mnp

DIRECTION: Questions given below are based on the letter series. In each of these series, some letters are missing. Select the correct alternative. If more than five letters are missing, select the last five letters of the series:

n - mnp - - p - npmn - mnp

ہدایت نیچے دے ہے سوالات حرف سرج پر مشتمل ہیں . ہر میں کہیں حرف گمشدہ ہے . سہی اختیارات کو چنے . اگر پچ حرف گنمام ہو تو آخری پانچ حرفونکو چنے

n - mnp - - p - npmn - mnp

A.pmnnm
A.pmnnm
A.pmnnm

B.pmnpp
B.pmnpp
B.pmnpp

C.pmnmp
C.pmnmp
C.pmnmp

D.pnpmn
D.pnpmn
D.pnpmn

Answer: C.pmnmp
C.pmnmp
C.pmnmp

29 15 सेकंदांमध्ये सेकंद काट्याद्वारे काय कोन बनवला जातो?

What angle is made by second hand in 15 sec.?

15 سکنڈ میں سکنڈ کی سوئی سے کونسا زاویہ بنتا ہے؟

(A) 15°

	(B) $1.5°$
	(C) $\left(\frac{1}{8}\right)^{\circ}$
	(D) $90°$
Answer:	(D) $90°$

30	सेल्सियस मोजपट्टीवरील पूर्ण शुन्य म्हणजे: The absolute zero on Celsius scale is: سیلسیس پیمانے پر مطلق صفر ہے:
	A.– 200°सें A.– 200°C A.200°C -
	B.– 273.15° सें B.– 273.15°C B.273.15°C -
	C.– 373.15° सें C.– 373.15°C C.373.15°C -
	D.यापैकी एकही नाही D.None of these D.ان میں سے کوئی بھی نہیں
Answer:	B.– 273.15° सें B.– 273.15°C B.273.15°C -

31

सूचना: खालील प्रश्नात कागदाच्या एक तुकड्याला प्रश्नातील आकृतीत दाखविल्याप्रमाणे घडी घातली आहे. उत्तरादाखल पर्यायांमधून अशी आकृती निवडा जी भोक पडल्यानंतर उलगडलेल्या कागदाचे स्वरूप दाखवेल.

DIRECTIONS: In the following question a piece of paper is folded in the manner shown in the question figure(s). Select the figure out of the answer choices showing the unfolded pattern after the punches (cut).

ہدایات: نیچے دیئے گئے سوالوں میں کاغذ کا ایک ٹکڑا اس طرح جوڑا گیا ہے جیسے سوال کی شکل میں بتایا گیا ہے، دیئے گئے جوابات کے اختیارات میں سے اس طرح انتخاب کیجیئے کہ کٹ لگانے کے بعد بغیر جوڑا ہوا پیٹرن دکھائی دے۔

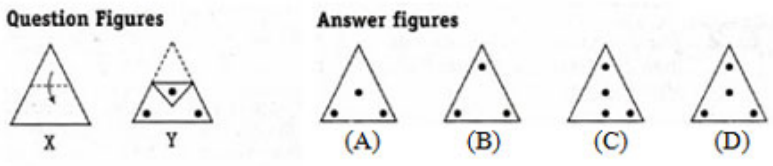

A. (A)

B. (B)

C. (C)

D. (D)

Answer: D. (D)

32

रेफ्रिजीरेटरमध्ये वापरल्या जाणाऱ्या सिएफसीचे नाव सांगा.

Name the CFC used in refrigerators.

ریفریجریٹرز میں استعمال ہونے والی سی ایف سی ہے

A.कार्बन डाय ऑक्साइड
A.Carbon dioxide
A. کاربن ڈائی آکسائیڈ

B.फ्रेऑन
B.Freon
B.فرآن

C.मिथेन
C.Methane
C.میتھین

D.आमोनिया
D.Ammonia
D. امونیا

Answer: B.फ्रेऑन
B.Freon
B.فرآن

33 ओडीआय क्रिकेटमध्ये सर्वात जलद ९००० धावा करणारा भारतीय क्रिकेटपटू कोण आहे –

The fastest Indian cricketer to score 9000 runs in ODI Cricket is –

او ڈی آئی کرکٹ میں 9000 رن بنانے والا تیز ترین ہندوستانی کرکٹ کا کھلاڑی _____ہے

A.सचिन तेंडूलकर
A.Sachin Tendulkar
A.سچن تندولکر

B.सौरभ गांगुली
B.Sourav Ganguly
B.سورو گانگولی

C.विराट कोहली
C.Virat Kohli
C.وراٹ کوہلی

D.राहुल द्रविड
D.Rahul Dravid
D.راہل ڈریوڈ

Answer: C.विराट कोहली
C.Virat Kohli
C.وراٹ کوہلی

34 ‘ सुर ‘ या शब्दाचा समानार्थी शब्द कोणता ?

A.सूर

B.स्वर

C.देव

D.दानव

Answer: C.देव

35 DIRECTIONS: A sentence with an underlined word is given below. Find the Word which is most similar in meaning to the underlined word.
He promised never to betray his wife

A.Deceive

B.Appreciate

C.Support

D.Like

Answer: A.Deceive

36 वडील आणि मुलाच्या वयाचे गुणोत्तर 7 : 3 आहे, जर त्यांचे एकूण वय 60 वर्षे असेल तर त्यांच्या वयामधील फरक काय आहे?

The ratio of the age of a father and his son is 7 : 3, if their total age is 60 years then what is the difference between their ages?

والد اور اس کے بیٹے کی عمر کا تنا سب 3:7 ہے، اگر اُن کی مجموعی 60 سال ہے تو اُن کی عمروں میں کتنا فرق ہے

A.42
A.42
A.42

B.18
B.18
B.18

C.14
C.14
C.14

D.24
D.24
D.24

Answer: D.24
D.24
D.24

37 **सूचना**: आकृती (X)मध्ये दिलेल्या आकारांचा वापर करून (A), (B), (C), (D) या आकारांमधील कोणता आकार तयार करता येईल?

DIRECTIONS: Find out which of the figure (A), (B), (C), (D) can be formed from the pieces given in fig. (X).

ہدایات (x) شکل میں جو ٹکڑے دیئے گئے ہیں ان سے (A), (B), (C), (D) کونسی شکلیں بن سکتی ہیں دریافت کریں۔

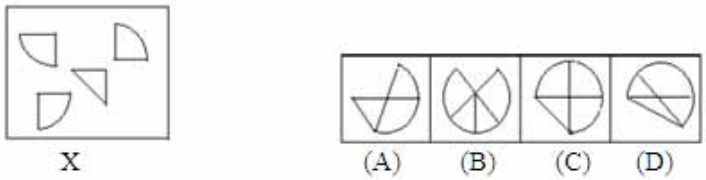

A. (A)

B. (B)

C. (C)

D. (D)

Answer: C. (C)

38 सूचना: खाली दिलेल्या विधान(A) आणि कारण (R) साठी, खालील पैकी योग्य पर्याय निवडा:

विधान (A): अशोक चक्र हे सर्वोच्च शांती काळातील शौर्य पुरस्कार आहे.
कारण (R): परम वीर चक्र शत्रुच्या चेहऱ्यावर शौर्य दाखवल्याबद्दल पराक्रमी म्हणून दिले जाते

DIRECTION: For the Assertion (A) and Reason (R) given below, choose the correct alternative from the following:

Assertion (A): Ashoka Chakra is the highest peace time gallantry award.
Reason (R): Param Vir. Chakra is awarded for bravery in the face of the enemy

ہدایت: نیچے دئیے گئے اسرشن (A) اور وجہ (R) کے لئے، مندرجہ ذیل میں سے صحیح متبادل منتخب کریں:

اسرشن (A): اشوک چکر امن کے وقت میں بہادری کا سب سے اعلیٰ اعزاز ہے۔
وجہ (R): پرم ویر چکر کو دشمن کا سامنا کرتے ہوئے بہادری کے لئے نوازا جاتا ہے۔

A.दोन्ही (A) आणि (R) सत्य आहेत आणि (R) (A) च योग्य स्पष्टीकरण आहे.
A.Both (A) and (R) are true and (R) is the correct explanation of (A)
A. (A) اور (R) دونوں صحیح ہیں اور (R) (A) کی درست وضاحت ہے

B.दोन्ही (A)आणि (R) खरे आहेत, परंतु (R) (A) च योग्य स्पष्टीकरण नाही.
B.Both (A) and (R) are true, but (R) is not the correct explanation of (A)
B. (A) اور (R) دونوں صحیح ہیں، لیکن (R) (A) کی درست وضاحت نہیں ہے

C.(A) सत्य आहे, परंतु (R) खोटे आहे
C.(A) is true, but (R) is false
C. (A) صحیح ہے، لیکن (R) غلط ہے

D.(A) खोटे आहे, परंतु (R) सत्य आहे.
D.(A) is false, but (R) is true
D. (A) غلط ہے، لیکن (R) صحیح ہے

Answer: B.दोन्ही (A)आणि (R) खरे आहेत, परंतु (R) (A) च योग्य स्पष्टीकरण नाही.
B.Both (A) and (R) are true, but (R) is not the correct explanation of (A)
B. (A) اور (R) دونوں صحیح ہیں، لیکن (R) (A) کی درست وضاحت نہیں ہے

39 दीर्घकालीन स्मृती यातून येते

Long term memory is through

طویل مدت تک یاد داشت کیسے برقرار رہتی ہے

A.वाचून शिकणे
A.Learning by reading
A.پڑھتے ہوئے سیکھنے سے

B.ऐकून शिकणे
B.learning by listening
B.سن کر سیکھنے سے

C.बहु-संवेदनक्षम अवयवांच्या योगे शिकणे
C.Learning by multi-sensory organs
C.ملٹی حساس اعضا سے کے ذریعہ سیکھنے سے

D.कल्पना करण्याद्वारे शिकणे
D.learning by visualizing
D.بصری طور پر دیکھ کر سیکھنے سے

Answer: C.बहु-संवेदनक्षम अवयवांच्या योगे शिकणे
C.Learning by multi-sensory organs
C.ملٹی حساس اعضا سے کے ذریعہ سیکھنے سے

40 जर तुम्ही एका भाड्याच्या घरात राहात आहात आणि सांस्कृतिक समाजाचे सदस्य सांस्कृतिक कार्यक्रमासाठी काही पैशांची वर्गणी मागत असतील, तर तुम्ही काय कराल?

If you are living in a rental house and the members of a cultural society demand some monetary contribution for the cultural programmers, what will you do?

اگر آپ کرائے کے گھر میں رہتے ہیں اور ایک ثقافتی سوسائٹی کے ارکان ثقافتی پروگراموں کے لئےآپ سے کچھ پیسے مانگتے ہیں تو آپ کیا کریں گے؟

A.तुम्ही वर्गणी देणार नाही कारण त्या परिसरात तुम्ही तात्पुरते निवासी आहात
A.You will not contribute being a temporary resident in the locality
A.آپ مقامی علاقے میں عارضی رہائشی ہونے کی وجہ سے اس میں حصہ نہیں لیں گے

B.तुम्ही आनंदाने वर्गणी द्याल आणि गटाचा एक सदस्य म्हणून कार्यक्रमाचा आनंद घ्याल
B.You will give happily and enjoy the programmer as a member of the group
B. آپ خوشی سے دیں گےاور گروپ کے ایک رکن کے طور پر پروگرام سے لطف اندوز ہوں گے

C.तुम्हाला अशा संघटनात्मक उपक्रमामध्ये काही रस नसल्याने, तुम्ही त्यांना वर्गणी देण्यास नकार द्याल
C.As you have no taste for such organizational ventures, you refuse to pay them
C.اس طرح کے تنظیمی اداروں کے لئے آپ کا کوئی ذوق نہیں ہے، آپ ان کو ادائیگی کرنے سے انکار کرتے ہیں

D.नकार देण्यासाठी तुमची काही गुंतागुंतीची आणि वैयक्तिक कारणे असतील
D.You will have some complexes and personal reasons for refusal.
D. آپ کے پاس انکار کی کچھ پیچیدہ اور ذاتی وجوہات ہیں

Answer: B.तुम्ही आनंदाने वर्गणी द्याल आणि गटाचा एक सदस्य म्हणून कार्यक्रमाचा आनंद घ्याल
B.You will give happily and enjoy the programmer as a member of the group
B. آپ خوشی سے دیں گےاور گروپ کے ایک رکن کے طور پر پروگرام سے لطف اندوز ہوں گے

41 सूचना: प्रत्येक प्रश्नाला एक प्रमुख विधानासोबत चार विधाने आहेत ज्यांच्याखाली A, B, C, आणि D असे चार विधान आहेत. क्रमवार विधानांची जोडी निवडा ज्यामध्ये प्रथम विधान दुसऱ्या विधानाला सुचवते, आणि दोन्ही विधाने तर्किकदृष्ट्या प्रमुख विधानासोबत निगडित असेल.

रीटा एकतर आशावादी आहे किंवा
निराशावादी आहे.
A. रीटा आशावादी आहे.
B. रीटा आशावादी नाही.
C. रीटा निराशावादी आहे.
D. रीटा निराशावादी नाही.

DIRECTIONS: Each question has a main statement followed by four statements labelled A, B, C and D. Choose the ordered pair of statements, where the first statement implies the second, and the two statements are logically consistent with the main statement.

Reeta is either optimistic or pessimistic
A. Reeta is optimistic
B.Reeta is not optimistic
C.Reeta is pessimistic
D.Reeta is not pessimistic

ہدایت: ہر سوال میں ایک جملہ ہے جسکے بعد چار جملےاے، بی،سی اور ڈی کے نام سے دئے گئے ہیں اسمیں منسلک جوڑیوں کو چنئے۔ جہاں پہلا جملہ دوسرے جملہ کی اور اشارہ کر رہا ہے اور دو جملے منطقی مرکزی بیان کے مطابق ہیں

ریتا یا تو پُر امید ہے یا مایوس
A۔ ریتا پُر امید ہے
B۔ ریتا پُر امید نہیں ہے
C۔ ریتا مایوس ہے
D۔ ریتا مایوس نہیں ہے

A.AC
A.AC
A.AC

B.DA
B.DA
B.DA

C.CB
C.CB
C.CB

D.AB
D.AB
D.AB

Answer: B.DA
B.DA
B.DA

42 A, B आणि C यांनी एक काम रु. 480 मध्ये पूर्ण करायला घेतले. A आणि B एकत्रितरित्या 1/4काम करु शकतात आणि शिल्लक काम C एकटा करतो. C ला किती वेतन (रुपयांमध्ये) मिळायला हवे?

A, B and C undertake to complete a work in Rs.480. A and B together can do 1/4 of the work and rest is done by C alone. How much wages (in Rs.) should C get?

A ، B اور C دونوں مل کر 1/4 کام کر سکتے ہیں اور باقی B اور A ایک کام کو مکمل کرنے کی زمہ داری 480 روپے میں لیتے ہیں۔ C کو کتنی اُجرت (روپوں میں) ملنی چاہئے؟ C اکیلے کرتا ہے ۔ C کام

A.360
A.360
A.360

B.120
B.120
B.120

C.240
C.240
C.240

D.180
D.180
D.180

Answer: A.360
A.360
A.360

43 खालीलपैकी सर्वांत लहान अपूर्णांक शोधा

Find the smallest of the following fractions

مندرجہ ذیل کسور میں سے سب سے چھوٹی کسر تلاش کریں

A.31/17
A.31/17
A.31/17

B.24/19
B.24/19
B.24/19

C.42/27
C.42/27
C.42/27

D.31/29
D.31/29
D.31/29

Answer: D.31/29
D.31/29
D.31/29

44 बाल विकास हे असे अभ्यास क्षेत्र आहे ज्यात

Child development is defined as a field of study that

مطالعہ کے میدان میں بچہ کی ترقی کی تشریح کی گئی ہے کہ

A.निरीक्षकांच्या मानवी क्षमतेत बदल
A.Examiners change in human abilities
A.ممتحن انسان کی اہلیت میں بدلاو لاتا ہے

B.जीवनकाळातील वर्तनाचे स्पष्टीकरण देण्याचा प्रयत्न करण्यात येतो
B.Seek to explain behavior across life span
B.پورے زندگی کے عرصے کے برتاو کی تشریح کی تلاش

C.मुलांची प्रौढांशी तुलना करण्यात येते
C.Compares children to adults
C.بچوں کا بالغوں کے ساتھ موازنہ کرتا ہے

D.मुलाच्या आकलनात्मक, सामाजिक व इतर क्षमतांच्या हळूहळू होणाऱ्या उत्क्रांतीसाठी कारणीभूत आहे
D.Accounts for the gradual evolution of child cognitive social and other capacities
D.بچے کے سنجیدہ سماجی اور دیگر صلاحیتوں کے بتدریج ارتقاء کا محاسبہ کرتا ہے

Answer: D.मुलाच्या आकलनात्मक, सामाजिक व इतर क्षमतांच्या हळूहळू होणाऱ्या उत्क्रांतीसाठी कारणीभूत आहे
D.Accounts for the gradual evolution of child cognitive social and other capacities
D.بچے کے سنجیدہ سماجی اور دیگر صلاحیتوں کے بتدریج ارتقاء کا محاسبہ کرتا ہے

45 पाणी आणि दूधाच्या मिश्रणामध्ये 80% दूध आहे. अशा 50 लिटर मिश्रणामध्ये, पाण्याची टक्केवारी 50% नी वाढवण्यासाठी किती लिटर पाणी आवश्यक असेल?

A mixture of water and milk contains 80% milk. In 50 liters of such a mixture , how many liters of water is required to increase the percentage of water to, 50%?

پانی اور دودھ کا ایک مرکب80% دودھ پر مشتمل ہے۔ اس طرح کے 50 لیٹر کے مرکب میں، پانی کو50% تک بڑھانے میں کتنے لیٹر پانی کی ضرورت ہوگی ؟

A.20
A.20
A.20

B.15
B.15
B.15

C.30
C.30
C.30

D.यांपैकी कोणतेही नाही
D.None of these
D.ان میں کوئی بھی نہیں

Answer: C.30
C.30
C.30

46 4 वर्षांमध्ये एका रकमेवरील सरळ व्याज रू. 600 आणि 6 वर्षांमध्ये रू. 650 होते. प्रति वर्ष व्याजाचा दर काय आहे?

A sum of money at simple interest amounts to Rs.600 in 4 years and Rs.650 in 6 years. The rate of interest per annum is?

ایک مبلغ رقم سود مفرد پر 4 سال میں 600 اور 6 سال میں 650 ہوجاتی ہے۔ سالانہ سود کا در؟

A.4.50%
A.4.50%
A.4.50%

B.4%
B.4%
B.4%

C.4.25%
C.4.25%
C.4.25%

D.अंदाज लावता येत नाही
D.Not predictable
D.بتایا نہیں جاسکتا

Answer: C.4.25%
C.4.25%
C.4.25%

47 तुमच्यावर तुमच्या सहकाऱ्यांकडून शिक्षकांच्या युनियनचे सदस्यत्व घेण्यासाठी दबाव आणला जात आहे. तुम्ही या परिस्थितीत कसा निर्णय घ्याल?

You are being pressurized by your colleagues to take the membership of the teachers' union. How could you take decision in this situation?

آپ پر اساتذہ اتحاد کی رکنیت کے لئےساتھیوں کے ذریعہ دباؤ ڈالا جا رہا ہے.اس صورت میں اپ کیسے فیصلہ کریں گے؟

A.तुम्ही सामाजिक संबंधांना प्राथमिकता द्याल, त्यामुळे, तुम्ही हा प्रस्ताव स्वीकाराल
A.You will give priority to social relations, therefore, you accept the offer
A.آپ سماجی تعلقات کو ترجیح دیتے ہیں، لہذا، آپ پیشکش کو قبول کرتے ہیں

B.तुम्हाला एकतेमध्ये विश्वास असेल त्यामुळे तुम्ही सदस्यत्व स्वीकाराल
B.You will have faith in unity so you accept the membership
B. آپ اتحاد میں یقین رکھتے ہیں، لہذا آپ رکنیت قبول کرتے ہیں

C.तुम्ही विचार कराल की व्यवस्थापनाबरोबर शत्रुत्व पत्करण्यापेक्षा सहकाऱ्यांबरोबर जोडले न जाणे अधिक चांगले आहे
C.You will think it is better to disaffiliate yourself from the colleagues instead of enmity with the management
C. آپ سوچیں گے کہ انتظام کے ساتھ دشمنی کے بجائے اپنے ساتھیوں سے خود کو الگ کرنا بہتر ہے

D.येनकेन प्रकाराने तुम्ही त्यांच्या इच्छेविरूद्ध जाण्याचा पूर्ण प्रयत्न कराल
D.You will try your best to go against their will by hook or crook.
D.آپ ان کی مرضی کے خلاف ہر قیمت پر کوشش کریں گے.

Answer: B.तुम्हाला एकतेमध्ये विश्वास असेल त्यामुळे तुम्ही सदस्यत्व स्वीकाराल
B.You will have faith in unity so you accept the membership
B. آپ اتحاد میں یقین رکھتے ہیں، لہذا آپ رکنیت قبول کرتے ہیں

48 विधान:
X देशात बलात्काराच्या घटना वाढत आहेत आणि सरकारची लाज काढली आहे.

कृतीचा कोर्स:
I. बलात्कारांच्या प्रकरणांची संख्या वाढत असल्याचे नाकारा.
II. बलात्कारांच्या घटना वाढत आहेत असे म्हणणाऱ्या लोकांना शिक्षा द्या.

Statement:
Cases of rapes are increasing in country X and the government is being put to shame.

Course of actions:
I. Deny that the number of rape cases are increasing.
II. Punish people who say that rape cases are increasing.

بیان:
X ۔ ملک میں ریپ کیسز میں اضافہ ہو رہا ہے اور حکومت کو شرم دلائی جا رہی ہے

لائحہ عمل:
I۔یہ ماننے سے انکار کر دیں کہ ریپ کیسز میں اضافہ ہو رہا ہے
II۔جو لوگ کہہ رہے ہیں کہ ریپ کیسز میں اضافہ ہو رہا ہے انہیں سزا دیں ۔

A.फक्त I अनुसरून आहे
A.Only I follows
A. صرف I لاگو ہو گا۔

B.फक्त II अनुसरण करते आहे
B.Only II follows
B. صرف II لاگو ہو گا۔

C.एकतर I किंवा II अनुसरून आहे
C.Either I or II follows
C. I یا II میں سے ایک لاگو ہو گا۔

D.I किंवा II दोन्हीपैकी काहीही अनुसरण करत नाही
D.Neither I nor II follows
D. I اور II میں سے کوئی بھی لاگو نہیں ہو گا۔

Answer: D.I किंवा II दोन्हीपैकी काहीही अनुसरण करत नाही
D.Neither I nor II follows
D. I اور II میں سے کوئی بھی لاگو نہیں ہو گا۔

49 वर्गातील प्रक्रिया म्हणून, परिक्षांचा वारंवार वापर

As a class-room procedure, frequent use ot examinations—

- ایک کلاس روم کے طریقہ کار کے طور پر، اکثر امتحانات کا استعمال

A.म्हणजे मूलतः शाळेचा मूल्यवान वेळ फुकट घालवणे आहे जो शिकण्यासाठी समर्पित असायला हवा
A.Is essentially a waste of valuable school time that should be devoted to learning
A.یہ بنیادی طور پر اسکول کےقابل قدر وقت کا ضیاع ہے جو سیکھنے کے لئے خرچ ہونا چاہئے

B.विद्यार्थ्यांना अंतिम परिक्षेचा ताण कमी करून परिक्षांमध्ये अधिक उत्तम प्रकारे पास होण्यासाठी संधी देते
B.Permits students to do better examinations through invalidating the final examination
B.حتمی امتحان کو باطل کرنے کے ذریعے طالب علموں کو بہتر امتحان کی اجازت دیتا ہے

C.वर्धित प्रेरणेसाठी तात्काळचे लक्ष्य प्रदान करून प्रभावी शिक्षणाला प्रोत्साहन देते
C.Promotes effective learning through providing immediate goals for increased motivation
C.بڑھتی ہوئی حوصلہ افزائی کے لئے فوری مقاصد فراہم کرنے کے ذریعے مؤثر سیکھنے کو فروغ دیتا ہے

D.अभ्यासक्रमाचे महत्वपूर्ण पैलू काय आहेत त्याची रूपरेखा तयार करून प्रभावी शिक्षणाला प्रोत्साहन देते
D.Promotes effective learning through outlining what are the important aspects of the course
D.کورس کے اہم پہلوؤں کی وضاحت کرنے کے ذریعے مؤثر سیکھنے کو فروغ دیتا ہے

Answer: C.वर्धित प्रेरणेसाठी तात्काळचे लक्ष्य प्रदान करून प्रभावी शिक्षणाला प्रोत्साहन देते
C.Promotes effective learning through providing immediate goals for increased motivation
C.بڑھتی ہوئی حوصلہ افزائی کے لئے فوری مقاصد فراہم کرنے کے ذریعے مؤثر سیکھنے کو فروغ دیتا ہے

50 विधान:
मुले पुर्वीपेक्षा अधिक जंक फूड खात आहेत, त्यांच्या आरोग्याला त्रास होत आहे.

कृतीचा कोर्स:
I. जंक फूड वर अतिरिक्त कर लावून महाग करा.
II. शाळांमध्ये आणि आसपास जंक फूडची विक्री बंद करा.

Statement:
Children are eating more junk food than ever before, their health has started suffering.

Course of actions:
I. Put additional tax on junk food making it costly.
II. Ban sale of junk food in and around schools.

بیان:
بچے پہلے سے کہیں زیادہ جنک فوڈ کھا رہے ہیں، ان کی صحت متاثر ہو رہی ہے۔

لائحہ عمل:
I۔جنک فوڈ پر اضافی ٹیکس لگادیں تا کہ یہ مہنگی ہو جائے۔
II۔ اسکول میں اور اس کے ارد گرد جنک فوڈ کی فروخت پر پابندی لگا دیں۔

A.फक्त I अनुसरून आहे
A.Only I follows
A. صرف I لاگو ہو گا۔

B.फक्त II अनुसरण करते आहे
B.Only II follows
B. صرف II لاگو ہو گا۔

C.एकतर I किंवा II अनुसरून आहे
C.Either I or II follows
C. I یا II میں سے ایک لاگو ہو گا۔

D.I किंवा II दोन्हीपैकी काहीही अनुसरण करत नाही
D.Neither I nor II follows
D. I اور II میں سے کوئی بھی لاگو نہیں ہو گا۔

Answer: D.I किंवा II दोन्हीपैकी काहीही अनुसरण करत नाही
D.Neither I nor II follows
D. I اور II میں سے کوئی بھی لاگو نہیں ہو گا۔

51 लेखी साहित्याचे चांगले मूल्यांकन यावर आधारित नसावे

Good evaluation of written material should not be based on

تحریری مواد کی اچھی تشخیص اس پر مبنی نہیں ہونی چاہئے

A.भाषिक अभिव्यक्ती
A.linguistic expression
A.زبانی طریقہ اظہار

B.तार्किक सादरीकरण
B.logical presentation
B.منطقی پیشکش

C.जे वाचलं जातं त्याची पुनरुत्पादन करण्याची क्षमता
C.ability to reproduce whatever is read
C.جو بھی پڑھا ہے اس کو دوبارہ پیش کرنے کی صلاحیت

D.विषयाचे आकलन
D.comprehension of subject
D.موضوع کی فہم

Answer: C.जे वाचलं जातं त्याची पुनरुत्पादन करण्याची क्षमता
C.ability to reproduce whatever is read
C.جو بھی پڑھا ہے اس کو دوبارہ پیش کرنے کی صلاحیت

52 Fill in the blank with the correct article.
The more they get, _____more they want.

A.the

B.a

C.an

D.No article required

Answer: A.the

53 सूचना: दिलेल्या पर्यायांमधून वेगळे ते बाहेर काढा.

DIRECTIONS: Find the odd one out from the given alternatives.

سمت: دیے گئے متبادل میں سے بے جوڑ کو تلاش کرو۔

A.पांढरा : घाणेरडा
A.White : Dirty
A.سفید : گندا

B.सोपा : कठीण
B.Easy : Difficult
B.آسان : مشکل

C.शूर: भित्रा
C.Brave: Coward
C.بہادر: بزدل

D.शेवट : सुरुवात
D.End : Beginning
D.اختتام : شروعات

Answer:
A.पांढरा : घाणेरडा
A.White : Dirty
A.سفید : گندا

54 प्रोजेक्ट वाघ, या वर्षामध्ये लाँच करण्यात आला

Project Tiger, was launched in the year

پروجیکٹ ٹائگر، سال -------- میں شروع کیا گیا تھا

A.1975
A.1975
A.1975

B.1973
B.1973
B.1973

C.1974
C.1974
C.1974

D.1971
D.1971
D.1971

Answer:
B.1973
B.1973
B.1973

55	प्रथम प्रयोगीक रडारचा शोधकर्ता कोण आहे? Who is the inventor of the first practical RADAR? عملی رڈار کا سب سے پہلا موجد کون ہے؟
	A.एच. एन. व्हॅन टेसल A.H.N. Van Tessel A.ایچ . این وین ٹیسل
	B.विल्यम के. रेंटजन B.William K. Rontgen B.ویلیم کے رونٹجن
	C.सर रॉबर्ट वॉटसन-वॅट C.Sir Robert Watson-Watt C.سر روبرٹ واٹسن- واٹ
	D.ए. एच. टेलर आणि लिओ सी यंग D.A.H. Taylor and Lio C. Young D.اے ایچ
Answer:	C.सर रॉबर्ट वॉटसन-वॅट C.Sir Robert Watson-Watt C.سر روبرٹ واٹسن- واٹ

56	Out of the given four words only one is spelt correctly. Find the word that is correctly spelt.
	A.Appearance
	B.Absense
	C.Acquaintence
	D.Allegaince
Answer:	A.Appearance

57 सूचना: खाली दिलेल्या प्रश्नात एक विधान आहे ज्याचे I आणि II असे दोन निष्कर्ष त्याखाली अंकित केलेले आहेत. या आधारे सर्वात योग्य पर्याय निवडा.

विधान:
देशातील स्वयंसेवी संस्थांना राजकीय पक्षांना माहिती अधिकाराच्या कक्षेत आणायचे आहे.
निष्कर्ष:
I. स्वयंसेवी संस्थांना राजकीय पक्ष आवडत नाहीत.
II. राजकीय पक्षांकडे लपवण्यासारखे खूप काही असते.

DIRECTIONS: The question below has a statement followed by two conclusions numbered I and II. Based on this choose the option that is most suitable.

Statement:
NGOs in India want political parties to be brought under the ambit of Right to Information Act.
Conclusions:
I. NGOs don't like political parties.
II. Political parties have much to hide.

ہدایات: نیچے دیے گئے سوال میں ایک بیان کے بعد دو نتائج I اور II دیے گئے ہیں۔ اس کی بنیاد پر انتہائی موزوں آپشن کا انتخاب کیجیے۔

بیان:
انڈیا میں غیر سرکاری تنظیمیں، سیاسی جماعتوں کو معلومات کے حق کے قانون کے تحت لانے کی خواہش مند ہیں.

نتیجے:
I. غیر سرکاری تنظیمیں سیاسی جماعتوں پسند نہیں کرتی ہیں.
II. سیاسی جماعتوں بہت کچھ چھپانا چاہتی ہیں.

A.केवळ निष्कर्ष क्रमांक I विधानास अनुसरून आहे
A.Only Conclusion I follows
A. صرف نتیجہ I لاگو ہو گا۔

B.केवळ निष्कर्ष क्रमांक II विधानास अनुसरून आहे
B.Only Conclusions II follows
B. صرف نتیجہ II لاگو ہو گا۔

C.निष्कर्ष क्रमांक I किंवा II अनुसरून आहे
C.Either I or II follows
C. I یا II میں سے ایک لاگو ہو گا۔

D.कोणताही निष्कर्ष अनुसरून नाही
D.Neither I nor II follow
D. I اور II میں سے کوئی بھی لاگو نہیں ہو گا۔

Answer: D.कोणताही निष्कर्ष अनुसरून नाही
D.Neither I nor II follow
D. I اور II میں سے کوئی بھی لاگو نہیں ہو گا۔

58 सूचना: खालील प्रश्नांमध्ये दिलेल्या पर्यायांमधून संबंधित अक्षर/शब्द/संख्या निवडा.

नर मधमाशी मधमाशी : : घोडा : ?

DIRECTIONS: In the following question, select the related letter/word/number from the given alternatives.

Drone: Bee : : Horse : ?

سمت: مندرجہ ذیل سوال میں، دیے گئے متبادل سے متعلقہ حرف/لفظ/نمبر منتخب کریں۔

ڈرون : شہد کی مکھی: : گھوڑا : ؟

A.गाय
A.Cow
A.گائے

B.कोंबडी
B.Hen
B.مرغی

C.खेचर
C.Mare
C.گھوڑی

D.प्राणी
D.Animal
D.جانور

Answer: C.खेचर
C.Mare
C.گھوڑی

59 **सूचना:** दिलेल्या पर्यायांमधून श्रेणी पूर्ण करणारी योग्य आकृती निवडा.

DIRECTIONS: Complete the series by choosing right figure from the given choices.

ہدایات دیئے گئے اختیارات میں سے صحیح شکل کو چن کر سریز کو مکمل کیجیئے

प्रश्नातील आकृत्या
Question Figures
سوالی شکل

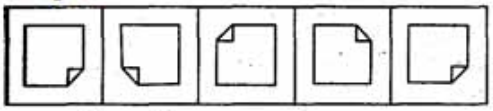

उत्तरासाठी पर्यायी आकृत्या
Answer Figures
جوابی شکل

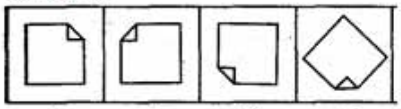

A B C D

A. (A)

B. (B)

C. (C)

D. (D)

Answer: C. (C)

60 **सूचना:** खालील प्रश्नात चार आकृत्या दिल्या आहेत. तीन आकृत्यांमध्ये एक विशिष्ट साम्य आहे आणि त्यामुळे त्यांचा एक गट तयार होतो. या गटात न बसणारी आकृती शोधून काढा.

DIRECTIONS: In the following question, four figures are given. Three are similar in a certain way and so form a group. Find out which one of the figures does not belong to that group.

ہدایات: A، B، C اور D کا نشان لگی ہوئی چار شکلوں میں سے تین شکلیں ، بالترتیب اور کسی طرح ایک جیسے ہیں، جبکہ ان میں سے ایک باقی سے الگ ہے۔ آپ کو وہ چکل چننا ہے جو الگ ہے؟ (طاق)



(A) (B) (C) (D)

A. (A)

B. (B)

C. (C)

D. (D)

Answer: B. (B)

61 शिखरापासून पायथ्यापर्यंत मोजमाप केले असता, जगामधील सर्वांत उंच पर्वत कोणता आहे –

If measured from summit to base, the tallest mountain in the world is –

اگر چوٹی سے بنیاد پر پیمائش کی جائے، تو دنیا میں لمباترین پہاڑ _____ ہے

A.माऊंट एव्हरेस्ट
A.Mt. Everest
A.ماؤنٹ ایوریسٹ

B.के2
B.K2
B.2 کے

C.माऊंट किलीमंजारो
C.Mt. Kilimanjaro
C.ماؤنٹ کالیمانجارو

D.यांपैकी कोणतेही नाही
D.None of these
D.ان میں سے کوئی نہیں

Answer: D.यांपैकी कोणतेही नाही
D.None of these
D.ان میں سے کوئی نہیں

62 सूचना: खालील माहिती वाचा आणि खालील दिलेल्या प्रश्नांची उत्तरे द्या:
एका क्लबमध्ये आठ सदस्य, A, B, C, D, E, F, G आणि H हे आयताकृती टेबलभोवती बसलेले आहेत. आठपैकी चार जण टेबलच्या कोप-यात बसून बाहेरील बाजूला बघत आहेत, तर इतर चार टेबलच्या बाजूंच्या मध्यभागी बसलेले आहेत आणि टेबलच्या मध्यभागाकडे बघत आहेत.
D हा G च्या उजव्या बाजूला तिसऱ्या क्रमांकावर बसला आहे. E हा C च्या डाव्या बाजूला तिसऱ्या क्रमांकावर बसला आहे. G मध्याभागाकडे बघत आहे. केवळ एक व्यक्ती E आणि F च्या मध्ये बसतो. F हा C च्या तत्काळ शेजारी नाही. H मध्याभागाकडे बघत आहे. A हा F चा तत्काळ शेजारी नाही. C कोपऱ्यांच्या मध्यभागाला बसलेला नाही. A आणि B कर्णरिषेमध्ये एकमेकांच्या अगदी समोरासमोर बसलेले आहेत.
खालील पाच पैकी चार विशिष्ट प्रकारे सारखे असल्याने त्यांचा एक गट तयार होतो. खालीलपैकी कोणता त्या समूह गटातील सदस्य नाही?

DIRECTIONS: Read the following information and answer the questions given below:
In a club, eight members A, B, C, D, E, F, G and H are sitting around a rectangular table. Out of eight, four sit at corners of a table and face outside, while other four sit in the middle of the sides of the tables and face towards centre of the table.
D sits third to the right of G. E sits third to the left of C. G faces the centre. Only one person sits between E and F. F is not the immediate neighbour of C. H faces the centre. A is not an immediate neighbour of F. C does not sit in the middle of the sides. A and B are sitting diagonally opposite to each other.
Four of the following five are alike in a certain way and so form a group. Which one of the following does not belong to that group?

ہدایات: مندرجہ ذیل معلومات کو پڑھیں اور نیچے دیے گئے سوالوں کے جواب دیں۔
ایک مستطیل میز کے ارد گرد بیٹھے ہوئے ہیں۔ آٹھ میں سے، چار میز کے کناروں H اور A، B، C، D، E، F، G ایک کلب میں آٹھ ممبر پر بیٹھے ہیں اور ان کا رخ باہر کی طرف ہے، جبکہ چار میز کے کناروں کے درمیان میں بیٹھے ہیں اور ان کا رخ میز کے مرکز کی طرف ہے۔
D، G کی F اور E کا رخ مرکز کی طرف ہے۔ G کے بائیں سے تیسرے پر بیٹھا ہے۔ E، C کے دائیں سے تیسرے نمبر پر بیٹھا ہے۔ C کا فوری پڑوسی نہیں ہے۔ A، F کا رخ مرکز کی طرف ہے۔ H کا فوری پڑوسی نہیں ہے۔ F، C درمیان صرف ایک شخص بیٹھا ہے۔
وتری طور پر ایک دوسرے کے مخالف بیٹھے ہوئے ہیں۔ B اور A کناروں کے درمیان نہیں بیٹھا ہوا ہے۔
مندرجہ ذیل پانچ میں سے چار بعض طریقے سے ایک جیسے ہیں اور اس طرح ایک گروپ تشکیل دیتے ہیں۔ مندرجہ ذیل میں سے کس کا تعلق گروپ سے نہیں ہے؟

A.G
A.G
A.G

B.F
B.F
B.F

C.D
C.D
C.D

D.E
D.E
D.E

Answer: C.D
C.D
C.D

63 Choose the word which is most similar in meaning to the given word.
CONTEMPORARY

A.Modern

B.Outdated

C.Ancient

D.Old-fashioned

Answer: A.Modern

64 मुलासाठी यश प्राप्त करण्याचे वय म्हणजे

The Achievement Age of a child is—

بچے کی کامیابی کی عمر ہے–

A.मुलाची एखाद्या विशिष्ट विषयातील प्राप्तता पातळी त्याच्या कालक्रमानुसार असलेल्या वयाच्या अनुषंगाने
A.The achievement level of the child in a particular subject in relation to his chronological age
A.اپنی کرونولوگیکل عمر کے سلسلے میں کسی مخصوص موضوع میں بچے کی کامیابی کی سطح

B.मुलाचे मानसिक वय
B.The mental age of the child
B.بچے کی ذہنی عمر

C.मुलाचे शैक्षणिक वय
C.The Educational age of the child
C.بچے کی تعلیمی عمر

D.वरीलपैकी कोणतेही नाही
D.None of the above
D.اوپر سے کوئی بھی نہیں

Answer: A.मुलाची एखाद्या विशिष्ट विषयातील प्राप्तता पातळी त्याच्या कालक्रमानुसार असलेल्या वयाच्या अनुषंगाने
A.The achievement level of the child in a particular subject in relation to his chronological age
A.اپنی کرونولوگیکل عمر کے سلسلے میں کسی مخصوص موضوع میں بچے کی کامیابی کی سطح

65

$20y^2 + 31y + 12 = 0$ या वर्गसमीकरणाची मुळे आहेत:

The roots of the quadratic equation $20y^2 + 31y + 12 = 0$ are:

$20y^2 + 31y + 12 = 0$ مربع مساوات کے روٹ ہیں

(A) $\frac{3}{4}, -\frac{4}{5}$

(B) $-\frac{3}{4}, \frac{4}{5}$

(C) **-15,-16**

(D) $-\frac{3}{4}, -\frac{4}{5}$

Answer: (D) $-\frac{3}{4}, -\frac{4}{5}$

66

खालीलपैकी कोण पहिल्या n सम संख्यांची बेरीज दशवते

Which one of the following represents the sum of the first n even numbers.

مندرجہ ذیل میں کون سا پہلے n جفت اعداد کی نمائندگی کرتا ہے؟

A.n(n–1)
A.n(n–1)
A.n(n–1)

B.n(n+1)
B.n(n+1)
B.n(n+1)

C.$n^2 + 1$
C.$n^2 + 1$
C.$n^2 + 1$

D.$n^2 - 2$
D.$n^2 - 2$
D.$n^2 - 2$

Answer: B.n(n+1)
B.n(n+1)
B.n(n+1)

67 निर्देश: खालील अक्षर-संख्याच्या व्यवस्थेचे निरीक्षण करा आणि खालील प्रश्नांची उत्तरे द्या:

B 8 4 C R M 9 P D K W F A 2 E J 7 X U Q H L T Y 6 G S

जर उपरोक्त दिलेल्या मालिकेत डाव्या बाजूने नववे, सोळावे, चोवीसावे आणि अठ्ठावीसावे अक्षरे घेऊन जर एखादा अर्थपूर्ण शब्द तयार करणे शक्य असेल तर दिलेल्या पर्याया मधून कोणते अक्षर असेल आणि जर कोणताही शब्द बनवणे शक्य नसेल तर उत्तर म्हणून 'X ' द्या आणि एकापेक्षा जास्त शब्द बनवणे शक्य असेल तर उत्तर म्हणून 'M' द्या.

DIRECTION: Study the following letter-number arrangement and answer the questions given below:

B 8 4 C R M 9 P D K W F A 2 E J 7 X U Q H L T Y 6 G S

If it is possible to make a meaningful word with the ninth, the sixteenth, the twenty-fourth and the twenty-eighth letters from left in the above given series, which of following will be the first letter of that word. If no such word can be made, give ‘X’ as the answer. If more than one such word can be made, give ‘M' as the answer.

ہدایت جیل می دی گی حرف اور نمبرس کی ترتیب پڑھئے اور سوالونکے جوا ب دو

B 8 4 C R M 9 P D K W F A 2 E J 7 X U Q H L T Y 6 G S

کیا یہ ممکن ہیں کی نوے ، سولہوے ، چوبسوے اور اٹھیسوے حرف سے کوئی لفج بنایا جاتا ہے اگر بنایا جاتا ہے تو جواب ایم دیجئے نہیں بنایا جاتا تو جواب ایکس دیجئے

A.X
A.X
A.X

B.M
B.M
B.M

C.P
C.P
C.P

D.E
D.E
D.E

Answer: A.X
A.X
A.X

68	कोणती संख्या सर्व भूमितीय आकृतींमध्ये आहे? Which number is in all the geometrical figures? تمام جیومیٹریکل تصاویر میں کون سا نمبر ہے؟ 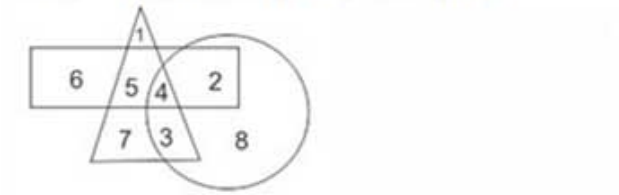
	A. 8
	B. 3
	C. 4
	D. 5
Answer:	C. 4

69 सूचना: अर्थपूर्ण परिच्छेद निर्माण करण्यासाठी, खाली दिलेली (P), (Q) (R), (S) आणि (T) ही पाच वाक्ये योग्य अनुक्रमाने पुनर्रचना करा; त्यांनतर खालील प्रश्नांची उत्तर द्या.
P. कामगाराने मुलाच्या ओरडण्याचा आवाज ऐकला.
Q. तो मदतीसाठी ओरडत होता.
R. मुलगा बुडत होता.
S. त्याने नदीत उडी मारली
T. त्याने स्वतःचे आयुष्य धोक्यात घालून मुलाला वाचविले.

पुनर्रचना केल्यानंतर खालीलपैकी कोणते वाक्य चौथे असेल?

DIRECTION: Rearrange the following five sentences (P), (Q), (R), (S) and (T) in the proper sequence to form a meaningful paragraph; then answer the questions given below them.
P. A workman heard the boy’s shouts.
Q. He shouted for help.
R. The boy was drowning.
S. He plunged into the river.
T. He risked his own life and saved the boy.

Which of the following should be the FOURTH sentence after rearrangement?

ہدایات: ان پانچ جملوں (P)، (Q)، (R)، (S) اور (T) کو با معنی پیرا بنانے کے لئے دوبارہ ترتیب دیجئے، پھر نیچے دے گئے سوالوں کے جواب دیجئے

P. ایک مزدور نے بچھے کی چیکھے سنی.
Q. وو مدد کے لئے چلایا.
R. بچہ ڈوب رہا تھا.
S. وو دریا میں کود گیا.
T. اسنے اپنی جان کا جوکھم اٹھایا اور بچے کو بچایا.

دوبارہ ترییب دینے کے بعد کون سا جملہ چوتھا ہونا چاہیے؟

A.S
A.S
A.S

B.P
B.P
B.P

C.Q
C.Q
C.Q

D.R
D.R
D.R

Answer: A.S
A.S
A.S

70

सूचना: पुढील प्रश्नांची उत्तरे देण्यासाठी खालील माहिती काळजीपूर्वक वाचा:

जर '+' म्हणजे ,'×''−' म्हणजे '+','x' म्हणजे '÷'आणि '÷'म्हणजे '−',तर या माहितीवर आधारित पुढील प्रश्नांची उत्तरे द्या.

DIRECTIONS: Read the following information carefully to answer the questions that follow:

If '+' means '×', '−' means '+','x' means '÷' and '÷' means '−', then answer the following questions based on this information.

ہدایت: نیچے دیئے گئے سوالوں کے جوابات کے لئے نیچے دی گئی معلومات ٹھیک سے پڑھیے۔

اگر '+' مطلب 'x'، 'x' مطلب '+'، '-' مطلب '÷' اور '÷' مطلب '-'، تو نیچے لکھے ہوئے سوالوں کے جوابات اس بنیاد پر دیجیئے۔

9 − 3 + 2 ÷ 16 x 2 = ?

A. 7

B. 5

C. 9

D. 6

Answer: A. 7

71

सूचना: दिलेल्या पर्यायांमधून योग्य पर्याय निवडा.
एकाच घनाच्या X बाजूमध्ये दोन काप, Y बाजूमध्ये तीन काप आणि Z बाजूमध्ये दोन काप केल्यावर किती लहान तुकडे मिळतात?

DIRECTION: Select the correct alternative from the given choices.
How many smaller pieces are obtained by making two cuts in X plane, three cuts in Y plane and two cuts in Z plane on the same cube?

ایک ہی کیوب کے X پلین میں 2 کٹ اور Y پلین میں 3 کٹ Z پلین میں 2 کٹ سے کتنے چھوٹے ٹکڑے حاصل ہوتے ہیں؟

A.12
A.12
A.12

B.24
B.24
B.24

C.36
C.36
C.36

D.50
D.50
D.50

Answer: C.36
C.36
C.36

72 पुढील जोडशब्द पूर्ण करा . ‘ जीव ----------’

A.शीव

B.जंतू

C.जीवन

D.नकला

Answer: B.जंतू

73 यशाच्या उत्कृष्ट परिक्षेसाठी मुख्य अट म्हणजे

The main condition of an excellent Achievement test is—

بہترین کامیابی ٹیسٹ کی اہم حالت ہے-

A.पूर्वनिश्चित केलेल्या उद्दिष्टांची पूर्तता
A.The fulfillment of predetermined goals
A.پیش وضاحتی اہداف کی تکمیل

B.विद्यार्थ्यांच्या मानसिक पातळीनुसार
B.In accordance to the mental level of the students
B.طالب علموں کی ذہنی سطح کے مطابق

C.व्यावहारीक उपयुक्तता असलेली
C.Having practical utility
C.عملی افادیت کاہونا

D.वरील सर्व
D.All the above
D.مذکورہ تمام

Answer: D.वरील सर्व
D.All the above
D.مذکورہ تمام

74 A, B, C, D आणि E अशा पाच पेट्याएकावर एक ठेवल्या आहेत. जर A ही B च्या वर आहे, C ही D च्या वर आणि E च्या खाली आहे. D ही A च्या वर आहे. तर कोणती पेटी मध्यभागी आहे ?

Five boxes A, B, C, D and E are placed one above the other. If A is above B, C is above D but below E and D is above A, which box is in the middle?

A،B،C،D اور E پانچ دبے A B ایک کے اپر ایک رکھے ہے.اگر C D ،کے اپر رکھا ہے D A کے نیچے اور E کے اپر ہے مگر
اپر ہے، کون سا دبا درمیان میں ہے؟

A.D
A.D
A.D

B.C
B.C
B.C

C.B
C.B
C.B

D.A
D.A
D.A

Answer: A.D
A.D
A.D

75 Q ची आई ही P ची बहीण आहे आणि M ची मुलगी आहे. S ही P ची मुलगी आहे आणि T ची बहीण आहे. मग M चे T सोबत नाते काय आहे?

Q's mother is sister of P and daughter of M. S is daughter of P and sister of T. How is M related to T?

Q کی ماں P کی بہن ہے اور P S .کی بیٹی M کی بہن T کی بیٹی ہے اور M کا T سے کیا رشتہ ہے؟

A.आजी
A.Grandmother
A.دادی

B.वडील
B.Father
B.باپ

C.आजोबा
C.Grandfather
C.دادا

D.आजोबा किंवा आझी
D.Grandfather or Grandmother
D.دادا یا دادی

Answer: D.आजोबा किंवा आझी
D.Grandfather or Grandmother
D.دادا یا دادی

76 जर तुम्हाला वाचनालयातून पुस्तक चोरण्याची सवय असेल, तर तुम्ही ही विशिष्ट वर्तणुक समस्या कशी सोडवाल?

If you have the habit of book-lifting from the library, how would you solve this typical problem behavior?

اگر آپ لائبریری سے کتاب اٹھانے کی عادت میں مبتلا ہیں تو، آپ اس عام مسئلہ کو کیسے حل کریں گے؟

A.तुम्ही हळुहळु ही सवय सोडाल कारण तुम्हाला माहीत आहे की ज्या व्यक्तीला त्याची नितांत गरज आहे त्याच्यासाठी हा अतिशय दुखःदायक अनुभव आहे
A.Gradually you will leave this habit because you know that it is very painful experience to the individual who is in dire need of it
A.آہستہ آہستہ آپ اس عادت کو چھوڑ دیں گے کیونکہ آپ جانتے ہیں کہ یہ اس شخص کے لئےبہت دردناک تجربہ ہے،جسے اس کی انتہائی ضرورت ہے۔

B.तुमच्या लक्षात येईल की ही एक अनैतिक कृती आहे परंतु त्यासाठी काही पर्याय नाही
B.You realise it as an immoral act but have no alternative
B. آپ اسے ایک غیر اخلاقی کارروائی سمجھتے ہیں لیکن آپ کے پاس کوئی متبادل نہیں ہے

C.तुम्ही ते विकत घेण्याचा प्रयत्न कराल
C.You will try to purchase it
C. آپ اسے خریدنے کی کوشش کریں گے

D.तुम्ही ते इतर विद्यार्थांकडून मिळवण्याचा प्रयत्न कराल
D.You will try to get it from other students.
D. آپ اسے دوسرے طالب علموں سے حاصل کرنے کی کوشش کریں گے.

Answer: A.तुम्ही हळुहळु ही सवय सोडाल कारण तुम्हाला माहीत आहे की ज्या व्यक्तीला त्याची नितांत गरज आहे त्याच्यासाठी हा अतिशय दुखःदायक अनुभव आहे
A.Gradually you will leave this habit because you know that it is very painful experience to the individual who is in dire need of it
A.آہستہ آہستہ آپ اس عادت کو چھوڑ دیں گے کیونکہ آپ جانتے ہیں کہ یہ اس شخص کے لئےبہت دردناک تجربہ ہے،جسے اس کی انتہائی ضرورت ہے۔

77 बौद्धिक संपदा अधिकार या माहिती व कल्पनांचे रक्षण करतात

Intellectual property rights (IPR) protect the use of information and ideas that are of

دانشورانہ ملکیت کےحقوق (آئی پی آر) کس طرح معلومات اور خیالات کے استعمال کی حفاظت کرتا ہے

A.आचार मूल्ये
A.ethical values
A.اخلاقی قدریں

B.नैतिक मूल्ये
B.moral value
B.اخلاقی وقعت

C.सामाजिक मूल्ये
C.social value
C.سماجی وقعت

D.व्यावसायिक मूल्ये
D.commercial value
D.تجارتی وقعت

Answer: D.व्यावसायिक मूल्ये
D.commercial value
D.تجارتی وقعت

78 गेल्या शंभर वर्षांमध्ये जागतिक समुद्रसपाटीचा स्तर अंदाजे इतक्याने वाढला आहे

Over the last 100 years global sea level has risen by about

گزشتہ ۱۰۰ سال میں عالمی سمندی سطح میں اضافہ ہوا ہے

A.20 - 25 मी
A.20 - 25 m
A. 20 - 25 میٹر

B.10 - 20 सेंमी
B.10 - 20 cm
B. 10 - 20 سینٹی میٹر

C.वरील दोन्ही
C.Both the above
C.اوپر دئے ہوئے دونوں

D.यापैकी एकही नाही
D.None of these
D. ان میں سے کوئی بھی نہیں

Answer:	B.10 - 20 सेंमी B.10 - 20 cm B. 10 - 20 سینٹی میٹر

79	DIRECTIONS: A sentence with an underlined phrasal verb is given below. Out of the four options, choose the one which can be substituted for the given phrasal Verb. Now he has got back to his studies.
	A.resumed
	B.suspended
	C.abandoned
	D.left
Answer:	A.resumed

80	गुणाकार करा: 7638 × 5 = ? Multiply: 7638 × 5 = ? ضرب دیں: 7638 × 5= ?
	A.34870 A.34870 A.34870
	B.38190 B.38190 B.38190
	C.43670 C.43670 C.43670
	D.36190 D.36190 D.36190

Answer: B.38190
B.38190
B.38190

81 एका घनाकृतीच्या तीन अवस्था दाखविल्या आहेत. त्यांवर अवलंबून हे शोधून काढा की दिलेल्या घनाकृतीमध्ये 6 या अंकाच्या विरुद्ध बाजूला कोणता अंक असेल?

Three positions of a cube are given. Based on them, find out, which number is found opposite number 6 in a given cube?

ہدایات: ایک کیوب کی تین حالتیں دی گئی ہیں۔ ان کی بنیاد پر، دریافت کیجیئے، کونسا نمبرکیوب میں دیئے گئے 6 نمبر کی اپوسٹ ہے ؟



A. 3

B. 5

C. 1

D. 6

Answer: A. 3

82 $\sqrt[3]{27} = 3^x$ असल्यास, x = ?

If $\sqrt[3]{27} = 3^x$, then x =?

؟=X تو ،$3^x = \sqrt[3]{27}$ اگر

A. 5

B. 3

C. 2

D. 1

Answer: D. 1

For More Info And Videos About TAIT-Exam Syllabus And Other Exam Visit My Channel
BADSHAHimp SubScribe Like & Share YouTube WWW.YouTube/BADSHAHimp

83 ‘DISTRIBUTION’ पासून खालील शब्दांपैकी कोणते शब्द तयार केले जाऊ शकत नाहीत?

Which of the following words cannot be formed from ‘DISTRIBUTION’?

مندرجہ ذیل الفاظ میں سے کونسا 'DISTRIBUTION' سے نہیں بنایا جاسکتا ہے؟

A.DISTURB
A.DISTURB
A.DISTURB

B.TUTION
B.TUTION
B.TUTION

C.SITUATION
C.SITUATION
C.SITUATION

D.TRUST
D.TRUST
D.TRUST

Answer: C.SITUATION
C.SITUATION
C.SITUATION

84 सूचना: खालील माहिती वाचा आणि खालील दिलेल्या प्रश्नांची उत्तरे द्या:
एका क्लबमध्ये आठ सदस्य, A, B, C, D, E, F, G आणि H हे आयताकृती टेबलभोवती बसलेले आहेत. आठपैकी चार जण टेबलच्या कोप-यात बसून बाहेरील बाजूला बघत आहेत, तर इतर चार टेबलच्या बाजूंच्या मध्यभागी बसलेले आहेत आणि टेबलच्या मध्यभागाकडे बघत आहेत.
D हा G च्या उजव्या बाजूला तिसऱ्या क्रमांकावर बसला आहे. E हा C च्या डाव्या बाजूला तिसऱ्या क्रमांकावर बसला आहे. G मध्याभागाकडे बघत आहे. केवळ एक व्यक्ती E आणि F च्या मध्ये बसतो. F हा C च्या तत्काळ शेजारी नाही. H मध्याभागाकडे बघत आहे. A हा F चा तत्काळ शेजारी नाही. C कोपऱ्यांच्या मध्यभागाला बसलेला नाही. A आणि B कर्णरिषेमध्ये एकमेकांच्या अगदी समोरासमोर बसलेले आहेत.
खालीलपैकी कोणत्या जोड्या मध्यभागी बसलेल्या सभासदांचे प्रतिनिधित्व करतात जे एकमेकांच्या समोरासमोर आहेत?

DIRECTIONS: Read the following information and answer the questions given below:
In a club, eight members A, B, C, D, E, F, G and H are sitting around a rectangular table. Out of eight, four sit at corners of a table and face outside, while other four sit in the middle of the sides of the tables and face towards centre of the table.
D sits third to the right of G. E sits third to the left of C. G faces the centre. Only one person sits between E and F. F is not the immediate neighbour of C. H faces the centre. A is not an immediate neighbour of F. C does not sit in the middle of the sides. A and B are sitting diagonally opposite to each other.
Which of the following pairs represent the members seated in the middle side who faces each other?

ہدایات: مندرجہ ذیل معلومات کو پڑھیں اور نیچے دیے گئے سوالوں کے جواب دیں۔
ایک مستطیل میز کے ارد گرد بیٹھے ہوئے ہیں۔ آٹھ میں سے، چار میز کے کناروں H اور A، B، C، D، E، F، G ایک کلب میں آٹھ ممبر پر بیٹھے ہیں اور ان کا رخ باہر کی طرف ہے، جبکہ چار میز کے کناروں کے درمیان میں بیٹھے ہیں اور ان کا رخ میز کے مرکز کی طرف ہے۔
D، G کی F اور E کا رخ مرکز کی طرف ہے۔ G کے بائیں سے تیسرے پر بیٹھا ہے۔ E، C کے دائیں سے تیسرے نمبر پر بیٹھا ہے۔ C کا فوری پڑوسی نہیں ہے۔ A، F کا رخ مرکز کی طرف ہے۔ H کا فوری پڑوسی نہیں ہے۔ F، C درمیان صرف ایک شخص بیٹھا ہے۔
وتری طور پر ایک دوسرے کے مخالف بیٹھے ہوئے ہیں۔ B اور A کناروں کے درمیان نہیں بیٹھا ہوا ہے۔
مندرجہ ذیل جوڑوں میں سے کون ان ممبران کی نمائندگی کرتا ہے جو درمیان میں اور ایک دوسرے کے سامنے بیٹھے ہیں؟

A.G आणि E
A.G and E
A.G اور E

B.H आणि F
B.H and F
B.H اور F

C.G आणि F
C.G and F
C.G اور F

D.D आणि E
D.D and E
D.D اور E

Answer: C.G आणि F
C.G and F
C.G اور F

85 “गुबगुबीत बुध्द” किंवा "हसरा बुध्द” या _____मूर्तिंच्या बुद्धाईवर आधारित आहेत

The “chubby Buddha” or “laughing Buddha” statues are based on Budai of –

” مجسمے _____ کےبودیا پر مبنی ہیں.”لافنگ بدھا” یا چبی بدھا

A.जपान
A.Japan
A.جاپان

B.कोरीया
B.Korea
B.کوریا

C.चीन
C.China
C.چین

D.भारत
D.India
D.ہندوستان

Answer: C.चीन
C.China
C.چین

86 एका रांगेत P उजवीकडून तिसऱ्या आणि डावीकडून चौथ्या क्रमांकावर आहे. तर रांगेत 7 मुले करण्यासाठी किती मुलांचा समावेश करावा लागेल ?

If P finds that he is third from the right and fourth from the left, how many boys should be added to the queue so that there are 7 boys in the line?

نے دیکھا کہ وو دھانیں سے تیسرا اور بھانیں سے چوتھا ہے، کتنے لڑکے جمہ کرنے ہے تاکہ کتار میں 7 لڑکے ہو؟ P اگر

A.2
A.2
A.2

B.1
B.1
B.1

C.4
C.4
C.4

D.0
D.0
D.0

Answer: B.1
B.1
B.1

87 रमेश त्याची गाडी पूर्वेला 4 किमी चालवतो, मग डावीकडे वळतो आणि 6 किमी चालवतो. तो पुन्हा त्याच्या डाव्या बाजूला वळतो आणि 4 किमी प्रवास करतो. तर रमेश त्याच्या सुरुवातीच्या ठिकाणापासून किती दूर आहे?

Ramesh drives his car 4 km to east, then takes left turn and drives 6 km. He again turns to his left hand side and travels 4 km. How many km is Ramesh away from his starting place?

رمیش اپنی کار 4 کلومیٹر مشرق کی طرف ڈرائیو کرتا ہے، پھر وہ بائیں مڑتا ہے اور 6 کلومیٹر ڈرائیو کرتا ہے۔ وہ دوبارہ اپنے بائیں ہاتھ کی طرف مڑتا ہے اور 4 کلومیٹر سفر کرتا ہے۔ اپنی شروعاتی جگہ سے رمیش کتنے کلومیٹر کی دوری پر ہے؟

A.6 किमी
A.6 km
A.6 کلومیٹر

B.10 किमी
B.10 km
B.10 کلومیٹر

C.4 किमी
C.4 km
C.4 کلومیٹر

D.14 किमी
D.14 km
D.14 کلومیٹر

Answer: A.6 किमी
A.6 km
A.6 کلومیٹر

For More Info And Videos About TAIT-Exam Syllabus And Other Exam Visit My Channel
BADSHAHimp SubScribe Like & Share YouTube WWW.YouTube/BADSHAHimp

88	निर्देश: मालिका पूर्ण करा S, R, Q, ?, O DIRECTION: Complete the series S, R, Q, ?, O ہدایت اس سرج کو مکمّل کرو S, R, Q, ?, O
	A.H A.H A.H
	B.O B.O B.O
	C.P C.P C.P
	D.G D.G D.G
Answer:	C.P C.P C.P
89	एका व्यक्तीचा असा ठाम विश्वास आहे की संगोपनाचा त्याच्या मुलाच्या विकासावर अतिशय परिणाम होतो. त्याला याचे महत्त्व पटणार नाही A person strongly believes that nurture strongly influences the development of his child. He would not agree with the importance of ایک شخص پورے طور پر یقین کرتا ہے کہ صرف پرورش بچے کے ڈولپمینٹ کو متاثر کرتا ہے۔ وہ ..... کی اہمیت سے متفق نہیں ہوگا.
	A.आनुवांशिक घटक A.Genetic factors A.نسلی عناصر
	B.समवयस्क लोकांमध्ये मिसळण्याची संधी B.exposure to peers B.ساتھیوں کی صحبت

C.घरातील खेळणी
C.Toys at home
C.گھر پر کھلونے

D.आई-वडिल प्रदर्शित करीत असलेला प्रेमळपणा
D.warmth displayed by parents
D.والدین کے ذریعہ ملنے والی والہانہ محبت

Answer: A.आनुवांशिक घटक
A.Genetic factors
A.نسلی عناصر

90 सूचना: प्रत्येक प्रश्नाला एक प्रमुख विधानासोबत चार विधाने आहेत ज्यांच्याखाली A, B, C, आणि D असे चार विधान आहेत. क्रमवार विधानांची जोडी निवडा ज्यामध्ये प्रथम विधान दुसऱ्या विधानाला सुचवते, आणि दोन्ही विधाने तर्किकदृष्ट्या प्रमुख विधानासोबत निगडित असेल.

जर तो दुपारी झोपतो, तर त्याला आळस येतो
A. तो दुपारी झोपतो
B. तो आळशी होतो
C. तो दुपारी झोपत नाही
D. त्याला आळस येत नाही

DIRECTIONS: Each question has a main statement followed by four statements labelled A, B, C and D. Choose the ordered pair of statements, where the first statement implies the second, and the two statements are logically consistent with the main statement.

If he sleeps in the afternoon, he gets lazy
A. he sleeps in the afternoon
B. he gets lazy
C. he does not sleep in the afternoon
D. he does not get lazy

ہدایت: ہر سوال میں ایک جملہ ہے جسکے بعد چار جملےاے، بی،سی اور ڈی کے نام سے دئے گئے ہیں اسمیں منسلک جوڑیوں کو چنئے۔ جہاں پہلا جملہ دوسرے جملہ کی اور اشارہ کر رہا ہے اور دو جملے منطقی مرکزی بیان کے مطابق ہیں

اگر وہ دوپہر کو سوتا ہے تو سست ہو جاتا ہے
A۔ وہ دوپہر کو سوتا ہے
B۔ وہ سست رہتا ہے
C۔ وہ دوپہر کو نہیں سوتا
D۔ وہ سست نہیں ہوتا

A.AB
A.AB
A.AB

B.AC
B.AC
B.AC

C.DA
C.DA
C.DA

D.CD
D.CD
D.CD

Answer: A.AB
A.AB
A.AB

91 जर $^{8}C_{3} + {}^{8}C_{4} = {}^{n}C_{4}$, तर n =

If $^{8}C_{3} + {}^{8}C_{4} = {}^{n}C_{4}$, then n

^{8}اگر$C_{3} + {}^{8}C_{4} = {}^{n}C_{4}$, تو پھر n =

A.4
A.4
A.4

B.7
B.7
B.7

C.9
C.9
C.9

D.11
D.11
D.11

Answer: C.9
C.9
C.9

92 खालीलपैकी अशुद्ध शब्द कोणता ?

A.भूपाळी

B.भूमिका

C.समीक्षा

D.परिक्षा

Answer: D.परिक्षा

93 440 मीटर जाण्यासाठी मोटार कारचे चाक 1000 आवर्तने करते. त्या चाकाचा व्यास (मीटरमध्ये):

The wheel of a motor car makes 1000 revolutions in moving 440 m. The diameter (in metre) of the wheel is:

موٹر گاڑی کا پہیہ 440 میٹر کی حرکت میں 1000 چکرلگاتا ہے۔ پہیے کا قطر (میٹر میں) ہے:

A.0.44
A.0.44
A.0.44

B.0.14000000000000001
B.0.14000000000000001
B.0.14000000000000001

C.0.24
C.0.24
C.0.24

D.0.34
D.0.34
D.0.34

Answer: B.0.14000000000000001
B.0.14000000000000001
B.0.14000000000000001

94 सूचना: अर्थपूर्ण परिच्छेद निर्माण करण्यासाठी, खाली दिलेली (P), (Q) (R), (S) आणि (T) ही पाच वाक्ये योग्य अनुक्रमाने पुनर्रचना करा; त्यांनतर खालील प्रश्नांची उत्तर द्या.
P. कामगाराने मुलाच्या ओरडण्याचा आवाज ऐकला.
Q. तो मदतीसाठी ओरडत होता.
R. मुलगा बुडत होता.
S. त्याने नदीत उडी मारली
T. त्याने स्वतःचे आयुष्य धोक्यात घालून मुलाला वाचविले.

पुनर्रचना केल्यानंतर खालीलपैकी कोणते वाक्य दुसरे असेल?

DIRECTION: Rearrange the following five sentences (P), (Q), (R), (S) and (T) in the proper sequence to form a meaningful paragraph; then answer the questions given below them.
P. A workman heard the boy's shouts.
Q. He shouted for help.
R. The boy was drowning.
S. He plunged into the river.
T. He risked his own life and saved the boy.

Which of the following should be the SECOND sentence after rearrangement?

ہدایات: ان پانچ جملوں (P)، (Q)، (R)، (S) اور (T) کو با معنی پیرا بنانے کے لئے دوبارہ ترتیب دیجئے، پھر نیچے دے گئے سوالوں کے جواب دیجئے

P. ایک مزدور نے بچھے کی چیکھے سنی.
Q. وو مدد کے لئے چلایا.
R. بچہ ڈوب رہا تھا.
S. وو دریا میں کود گیا.
T. اسنے اپنی جان کا جوکھم اٹھایا اور بچے کو بچایا.

دوبارہ ترییب دینے کے بعد کون سا جملہ دوسرا ہونا چاہیے؟

A.Q
A.Q
A.Q

B.P
B.P
B.P

C.R
C.R
C.R

D.T
D.T
D.T

Answer:	A.Q A.Q A.Q

95	Out of the given options, choose the one which is the correct indirect speech of the sentence given below. She said, “Will you listen to such a man?”
	A.She asks them whether they will listen to such a man.
	B.She asks them whether they could listen to such a man.
	C.She asks them whether they can listen to such a man.
	D.She asked them whether they would listen to such a man.
Answer:	D.She asked them whether they would listen to such a man.

96	642 + 717 – 84 + 343 – 119 + 420 =? 642 + 717 – 84 + 343 – 119 + 420 =? 642 + 717 – 84 + 343 – 119 + 420 =?
	A.1919 A.1919 A.1919
	B.2015 B.2015 B.2015
	C.3201 C.3201 C.3201
	D.9841 D.9841 D.9841
Answer:	A.1919 A.1919 A.1919

97 सूचना: खालील प्रश्नांमध्ये दिलेल्या पर्यायांमधून संबंधित अक्षर/शब्द/संख्या निवडा.

सीमा : देश ::

DIRECTIONS: In the following question, select the related letter/word/number from the given alternatives.

Border : Country ::

سمت: مندرجہ ذیل سوال میں، دیے گئے متبادل سے متعلقہ حرف/لفظ/نمبر منتخب کریں۔

سرحد: ملک ::

A.पेन : टोपी
A.Pen : Cap
A.قلم: ٹوپی

B.पुस्तक: : आवरण
B.Book : Cover
B.کتاب : کور

C.कान/ दांडा : फावडा
C.Handle : Spade
C.ہینڈل : کدال

D.चौकट/ फ्रेम : चित्र
D.Frame : Picture
D.فریم : تصویر

Answer: D.चौकट/ फ्रेम : चित्र
D.Frame : Picture
D.فریم : تصویر

98 ‘ इतिश्री करणे ’ या वाक्प्रचाराचा अर्थ काय ?

A.आरंभ करणे.

B.शेवट करणे.

C.मध्यंतर करणे.

D.इच्छा व्यक्त करणे.

Answer: B.शेवट करणे.

99

खालील आकृतीमध्ये किती सरळ रेषा आहेत?

How many straight lines are there in the following figure?

نیچے دی ہوئی شکل میں کتنی سیدھی لکیریں ہیں؟

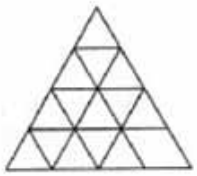

A. 9

B. 11

C. 15

D. 48

Answer: B. 11

100 सूचना: खालील प्रश्नांमध्ये दिलेल्या पर्यायांमधून संबंधित अक्षर/शब्द/संख्या निवडा.

पुरुष हात: : हत्ती : ?

DIRECTIONS: In the following question, select the related letter/word/number from the given alternatives.

Man: Hand: : Elephant : ?

سمت: مندرجہ ذیل سوال میں، دیے گئے متبادل سے متعلقہ حرف/لفظ/نمبر منتخب کریں۔

آدمی: ہاتھ : : ہاتھی : ؟

A.शेपूट
A.Tail
A.دم

B.सोंड
B.Trunk
B.سونڈ

C.फूट
C.Feet
C.پیر

D.सुळा
D.Tusk
D.ہاتھی

Answer: B.सोंड
B.Trunk
B.سونڈ

101 खालील आकृतींपैकी कोणती खुली वक्र-रेषा आहे?

Which one of the following figure is an open curve?

نیچے دیئے گئے شکلوں میں سے کونسی شکل واضح خم ہے؟

(A) 

(B) 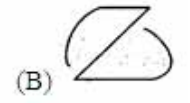

(C) 

(D) 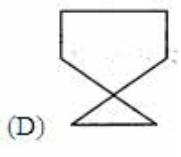

Answer: (B) 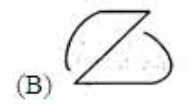

102 अतिशय उच्च तपमान मोजण्यासाठी वापरले जाणारे उपकरण आहे:

Device used to measure very high temperature is:

بہت زیادہ درجہ حرارت کی پیمائش کے لئے استعمال کیا جانے والا آلہ ہے:

A.पायरोमीटर
A.Pyrometer
A.پیرامیٹر

B.थर्मामीटर
B.Thermometer
B.تھرمامیٹر

C.बोलोमीटर
C.Bolometer
C.بالو میٹر

D.कॅलरीमीटर
D.Calorimeter
D.کیلوری میٹر

Answer: A.पायरोमीटर
A.Pyrometer
A.پیرامیٹر

103 सूचना : खालील प्रत्येक प्रश्नात दोन विधाने I आणि II दिलेले आहेत. हे विधान एकतर स्वतंत्र कारण असू शकतात किंवा स्वतंत्र कारणांचे परिणाम असू शकतात. यांपैकी एक विधान इतर विधानाचा परिणाम असू शकतो. दोन्ही विधाने वाचा आणि खालीलपैकी कोणत्या उत्तराचा पर्याय या दोन्ही विधानांमधील संबंधांचे वर्णन करतो ते ठरवा.

विधान :
I. भारतात बलात्काराच्या घटनांची संख्या वाढत आहे.
II. भारतातील लोकांमध्ये चीनी अन्नाचे सेवन वाढत आहेत.

DIRECTIONS: Below in each question are given two statements I and II. These statements may be either independent causes or may be effects of independent causes. One of these statements may be the effect of the other statement. Read both the statements and decide which of the following answer choice correctly depicts the relationship between these two statements.

Statements:
I. The number of rape cases in India are increasing.
II. People in India are increasing consumption of Chinese food.

ہدایات: نیچے ہر سوال میں دو بیانات I اور II آ زاد وجوہات یا پھر آزاد وجوہات کے اثرات ہو سکتے ہیں۔ انہیں گئے ہیں۔ یہ بیانات یا تو
بیانات میں سے ایک بیان دوسرے کا اثر ہو سکتا ہے۔دونوں بیانات پڑھیں اور فیصلہ کریں کہ نیچے دیے گئے کس جواب کا انتخاب ان
دونوں بیانات کے در میان تعلق کو ٹھیک سے ظاہر کرتا ہے۔

بیانات:
I –انڈیا میں ریپ کیسز میں اضافہ ہو رہا ہے۔
II ۔ انڈیا میں لوگ چائنیز فوڈ زیادہ کھا رہے ہیں۔

A.विधान I कारण आहे आणि विधान II त्याचा परिणाम आहे;
A.Statement I is the cause and statement II is its effect;
A.بیان نمبر I وجہ ہے اور بیان نمبر II اس کا اثر ہے۔

B.विधान II कारण आहे आणि विधान I त्याचा परिणाम आहे;
B.Statement II is the cause and statement I is its effect;
B.بیان نمبر II وجہ ہے اور بیان نمبر I اس کا اثر ہے۔

C.विधान I आणि II दोन्ही स्वतंत्र कारणे आहेत;
C.Both the statements I and II are independent causes
C.آزاد وجوہات ہیں۔ II اور نمبر I دونوں بیانات نمبر

D.विधान I आणि II दोन्ही स्वतंत्र कारणांचे परिणाम आहेत;
D.Both the statements I and II are effects of independent causes;
D.آزاد وجوہات کے اثرات ہیں۔ II اور نمبر I دونوں بیانات نمبر

Answer: D.विधान I आणि II दोन्ही स्वतंत्र कारणांचे परिणाम आहेत;
D.Both the statements I and II are effects of independent causes;
D.آزاد وجوہات کے اثرات ہیں۔ II اور نمبر I دونوں بیانات نمبر

104 सूचना: खालील प्रश्नांमध्ये दिलेल्या पर्यायांमधून संबंधित अक्षर/शब्द/संख्या निवडा.

6 : 36 :: ? : 256

DIRECTIONS: In the following question, select the related letter/word/number from the given alternatives.

6 : 36 :: ? : 256

سمت: مندرجہ ذیل سوال میں، دیے گئے متبادل سے متعلقہ حرف/لفظ/نمبر منتخب کریں۔

6 : 36 :: ? : 256

A.4
A.4
A.4

B.13
B.13
B.13

C.16
C.16
C.16

D.10
D.10
D.10

Answer: C.16
C.16
C.16

105 सूचना: दिलेल्या पर्यायांमधून वेगळे ते बाहेर काढा.

DIRECTIONS: Find the odd one out from the given alternatives.

سمت: دیے گئے متبادل میں سے بے جوڑ کو تلاش کرو۔

A.CJ
A.CJ
A.CJ

B.AG
B.AG
B.AG

C.HO
C.HO
C.HO

D.KR
D.KR
D.KR

Answer: B.AG
B.AG
B.AG

106 Choose the word which is opposite in meaning to the given word.
AMPLIFY

A.Decrease

B.Increase

C.Magnify

D.Escalate

Answer: A.Decrease

107 खालीलपैकी कोणता ऑटोमोबाइल उत्सर्जनात एक घटक नाही?

Which one among the following is not a constituent in automobile emission?

مندرجہ ذیل میں سے کون آٹوموبائل اخراج کا ایک جزو نہیں ہے؟

A.कार्बन मोनॉक्साईड
A.Carbon monoxide
A. کاربن مونوآکسائڈ

B.हायड्रोजन पेरॉक्साइड
B.Hydrogen peroxide
B. ہائیڈروجن پیروکسائڈ

C.बेंझिन
C.Benzene
C. بینزین

D.नायट्रोजन डायऑक्साइड
D.Nitrogen dioxide
D. نائٹروجن ڈائی آکسائیڈ

Answer: C.बेंझिन
C.Benzene
C. بینزین

108 ताऱ्यांमधील अंतर यामध्ये मोजले जाते:

Distance between stars
is measured in:

ستاروں کے بیچ کا فاصلہ ماپا جاتاہے:

A.गॅक्टिक युनिट
A.Galactic unit
A.گلیکٹرک یونٹ سے

B.सेलार माईल
B.Seller mile
B.سیلر مائل سے

C.कॉस्मिक किलोमिटर
C.Cosmic kilometer
C.کاسمک کیلو میٹر سے

D.प्रकाश वर्ष
D.Light year
D.لائٹ یئر سے

Answer: D.प्रकाश वर्ष
D.Light year
D.لائٹ یئر سے

109 सूचना: दिलेल्या पर्यायांमधून वेगळे ते बाहेर काढा.

DIRECTIONS: Find the odd one out from the given alternatives.

سمت: دیے گئے متبادل میں سے بے جوڑ کو تلاش کرو۔

A.श्वासोच्छ्वास
A.Respiration
A.تنفس

B.पचन
B.Digestion
B.ہاضمہ

C.रोग
C.Disease
C.بیماری

D.रक्त दाब
D.Blood pressure
D.خون کا دباؤ

Answer: C.रोग
C.Disease
C.بیماری

110 अलिकडेच, न्यूयोर्कमधील हवामान संमेलनामध्ये, इमारतीमध्ये उपस्थित असलेल्या 700 पुरूष, 500 महिला, 800 मुलांपैकी, 20% पुरूष, 40% महिला आणि 10% मुलं भारतीय आहेत. भारतीय नसलेल्या लोकांची टक्केवारी काढा?

In the recent, Climate Conference in New York, out of 700 men, 500 women, 800 children present inside the building premises, 20% of the men, 40% of the women and 10% of the children were Indians. Find the percentage of people who were not Indian?

حال ہی میں، نیویارک میں موسمیاتی کانفرنس میں 700 سے مرد، 500 خواتین، 800 بچے عمارت کے اندر موجود ہیں، 20%مرد، 40% خواتین اور 10%بچے بھارتی ہیں. ان لوگوں کا فیصد تلاش کریں جو ہندوستانی نہیں تھے؟

A.73%
A.73%
A.73%

B.77%
B.77%
B.77%

C.79%
C.79%
C.79%

D.83%
D.83%
D.83%

Answer: C.79%
C.79%
C.79%

111 पहिल्या दोन आकृतींमध्ये जे नाते आहे त्यावरून A, B, C, आणि D नावाच्या चार आकृतींपैकी कोणती आकृती श्रेणी पूर्ण करेल?

Which of the five numbered figures completes the sequence, with the same relationship as between the first two figures?

پانچ عدد والی کونسی شکل ترتیب کو مکمل کرتی ہے، اسی تعلق سے جو پہلی دو شکلوں کے مابین ہے؟

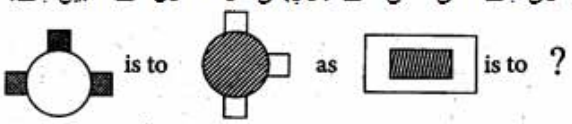

उत्तरासाठी पर्यायी आकृत्या

Answer Figure

جوابی شکل

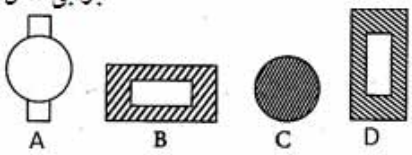

A. (A)

B. (B)

C. (C)

D. (D)

Answer: D. (D)

112 जर त्रिकोणाचा प्रत्येक कोन हा इतर दोन कोनांच्या बेरजेपेक्षा कमी असेल, तर तो त्रिकोण आहे:

If each angle of a triangle is less than the sum of the other two, then the triangle is:

اگر مثلث کے ہر زاویہ دوسرے دو کے مجموعے کے مقابلے میں کم ہے، تو مثلث یہ ہے:

A.काटकोन
A.Right-angled
A.Right-angled

B.लघुकोन
B.Acute-angled
B.Acute-angled

C.विशाल कोन
C.Obtuse-angled
C.Obtuse-angled

D.यांपैकी कोणतेही नाही
D.None of these
D.کوئی نہیں

Answer: B.लघुकोन
B.Acute-angled
B.Acute-angled

113 मूल्य शिक्षणाचा अर्थ

Value education stands for

تعلیم اقدارکی اہمیت کا کیا مطلب ہے

A.विद्यार्थ्यास आरोग्यसंपन्न करणे
A.making a student healthy
A.طالب علم کو صحتمند بنانا

B.विद्यार्थ्यास काम मिळवावयास लावणे
B.making a student get the job
B.طالب علم کو ملازمت حاصل کرنے کے قابل بنانا

C.सद्गुण रुजवणे
C.inculcation of virtues
C.نیکی کی تلقین

D.व्यक्तिमत्त्वाचा चौफेर विकास
D.all round development of personality
D. شخصیت کا پورا نکھار

Answer: D.व्यक्तिमत्त्वाचा चौफेर विकास
D.all round development of personality
D. شخصیت کا پورا نکھار

114 एकाच फाशाच्या चार अवस्थांवरून 4 ठिपके असणाऱ्या बाजूच्या विरुद्ध बाजूवर किती ठिपके असतील ते शोधून काढा.

From the given four positions of a single dice, find the number of dots at the face opposite to the face having 4 dots.

ہدایات: ایک پاسہ کی دی گئی چار حالتوں میں سے، ایک پاسہ کے منہ پر نقطوں کی گنتی کو دریافت کیجیئے، جس کے سامنےوالے پاسہ کے منہ پر نقطے 4 ہے؟

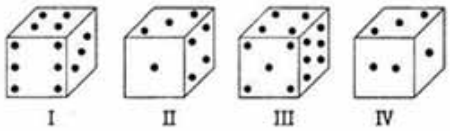

A. 2

B. 4

C. 5

D. 6

Answer: A. 2

115

$$\sqrt{\frac{1225}{324}} = ?$$

A. 25/77

B. 35/18

C. 35/77

D. 25/77

Answer: B. 35/18

116 खालीलपैकी शुद्ध शब्द कोणता ?

A.आशीर्वाद

B.आशिर्वाद

C.आर्शीवाद

D.आर्शिवाद

Answer:	A.आशीर्वाद	

117	Out of the given options, choose the one which is the correct passive voice of the sentence given below. Does she do her duty?	
	A.Are duties did by her?	
	B.Is her duty done by her?	
	C.Have her duties been done by her?	
	D.Have her duties being done by her?	
Answer:	B.Is her duty done by her?	

118	खालीलपैकी बरोबर वाक्य कोणते ?	
	A.रेलगाडी रुळावरून पोहते.	
	B.रेलगाडी रुळावरून धावते.	
	C.रेलगाडी रुळावरून उडते.	
	D.रेलगाडी रुळावरून सरपटते.	
Answer:	B.रेलगाडी रुळावरून धावते.	

119	Out of the given options which best expresses the meaning of the given Proverb? Familiarity breeds contempt.	
	A.If you know someone very well or experience something a lot, you cannot live without it or them	
	B.If you know someone very well or experience something a lot, you tend to get used to it or them	
	C.If you know someone very well or experience something a lot, you develop fascination for them	
	D.If you know someone very well or experience something a lot, you stop respecting them	
Answer:	D.If you know someone very well or experience something a lot, you stop respecting them	

120 चरण आपल्या घरापासून उत्तरेकडे 15 कि.मी. गेला. नंतर तो पश्चिमेकडे वळतो आणि 20 कि.मी.अंतर कापतो. नंतर तो दक्षिणेकडे वळला आणि त्याने 5 कि.मी. अंतर कापले. शेवटी पूर्वेकडे वळत तो 25 कि.मी. अंतर कापतो. तो आपल्या घरापासून कोणत्या दिशेस आहे?

From his house, Charan went 15 kms to the north. Then he turns west and covered 20 km. Then he turned south and covered 5 km. Finally turning to east, he covered 25 km. In which direction is he from his house?

چرن اپنے گر سے شمال کی طرف 15 کلومیٹر گیا- پھر مغرب کی جانب مڑا اور 20 کلومیٹر کا فاصلہ طے کیا- پھر وہ جنوب کی طرف مڑا اور 5 کلومیٹر تکگیا- بالآخر مشرق کی طرف مڑتے ہوئے وہ 25 کلومیٹر چلا- اب وہ اپنے گھر سے کس سمت میں ہے؟

A.उत्तर पश्चिम
A.North West
A.شمال مغرب

B.उत्तर पूर्व
B.North East
B.شمال مشرق

C.दक्षिण पूर्व
C.South East
C.جنوب مغرب

D.दक्षिण पश्चिम
D.South West
D.جنوب مشرق

Answer: B.उत्तर पूर्व
B.North East
B.شمال مشرق

121 निर्देश: खालील शब्दांची तार्किक क्रमाने मांडणी करा:

1. पोलिस
2. शिक्षा
3. गुन्हा
4. न्याय
5. निर्णय

DIRECTIONS: Arrange the following in a logical order:

1. Police
2. Punishment
3. Crime
4. Justice
5. Judgement

ہدایات: ایک منطقی ترتیب میں مندرجہ ذیل کو مرتب کریں:

1. پولیس
2. سزا
3. جرم
4. انصاف
5. فیصلے

A.1, 2, 3, 4, 5
A.1, 2, 3, 4, 5
A.1, 2, 3, 4, 5

B.3, 1, 2, 4, 5
B.3, 1, 2, 4, 5
B.3, 1, 2, 4, 5

C.3, 1, 4, 5, 2
C.3, 1, 4, 5, 2
C.3, 1, 4, 5, 2

D.5, 4, 3, 2, 1
D.5, 4, 3, 2, 1
D.5, 4, 3, 2, 1

Answer: C.3, 1, 4, 5, 2
C.3, 1, 4, 5, 2
C.3, 1, 4, 5, 2

122 सूचना : खालील प्रत्येक प्रश्नात दोन विधाने I आणि II दिलेले आहेत. हे विधान एकतर स्वतंत्र कारण असू शकतात किंवा स्वतंत्र कारणांचे परिणाम असू शकतात. यांपैकी एक विधान इतर विधानाचा परिणाम असू शकतो. दोन्ही विधाने वाचा आणि खालीलपैकी कोणत्या उत्तराचा पर्याय या दोन्ही विधानांमधील संबंधांचे वर्णन करतो ते ठरवा.

विधान :
I. ऊस उत्पादनाचा एक प्रमुख भाग कीटकांमुळे प्रभावित झाला ज्यामुळे राज्यातील शेतकऱ्यांचे मोठ्या प्रमाणात नुकसान झाले.
II. यापूर्वी ऊस लागवड करणारे राज्यातील शेतकरी आता यावर्षी द्राक्षांची लागवड करीत आहेत.

DIRECTIONS: Below in each question are given two statements I and II. These statements may be either independent causes or may be effects of independent causes. One of these statements may be the effect of the other statement. Read both the statements and decide which of the following answer choice correctly depicts the relationship between these two statements.

Statements:
I. A Major part of the sugarcane crop was affected by pests resulting into huge loss incurred by the farmers in the state.
II. The farmers in the state who were cultivating sugarcane earlier have now switched over to grapes cultivation this year.

ہدایات: نیچے ہر سوال میں دو بیانات I اور II آ تو یا بیانات یہ۔ ان دیے گئے ہیں۔ یہ بیانات یا تو آزاد وجوہات یا پھر بیانات میں سے ایک بیان دوسرے کا اثر ہو سکتا ہے۔دونوں بیانات پڑھیں اور فیصلہ کریں کہ نیچے دیے گئے کس جواب کا انتخاب ان دونوں بیانات کے در میان تعلق کو ٹھیک سے ظاہر کرتا ہے۔

بیانات:
I – گنّے کی فصل کا ایک بڑا حصّہ کیڑے مکوڑوں سے متاثر ہوا ہے جس کے نتیجے میں ریاست میں کسانوں کو بھاری نقصان ہوا ہے۔
II ۔ ریاست میں جو کسان پہلے گنّا کاشت کر رہے تھے، اس سال وہ انگور کاشت کر رہے ہیں۔

A.विधान I कारण आहे आणि विधान II त्याचा परिणाम आहे;
A.Statement I is the cause and statement II is its effect;
A.بیان نمبر I وجہ ہے اور بیان نمبر II اس کا اثر ہے۔

B.विधान II कारण आहे आणि विधान I त्याचा परिणाम आहे
B.Statement II is the cause and statement I is its effect;
B.بیان نمبر II وجہ ہے اور بیان نمبر I اس کا اثر ہے۔

C.विधान I आणि II दोन्ही स्वतंत्र कारणे आहेत;
C.Both the statements I and II are independent causes;
C. دونوں بیانات I اور II آزاد وجوہات ہیں۔

D.विधान I आणि II दोन्ही स्वतंत्र कारणांचे परिणाम आहेत;
D.Both the statements I and II are effects of independent causes;
D. دونوں بیانات نمبر I اور نمبر II آزاد وجوہات کے اثرات ہیں۔

Answer: A.विधान I कारण आहे आणि विधान II त्याचा परिणाम आहे;
A.Statement I is the cause and statement II is its effect;
A.بیان نمبر I وجہ ہے اور بیان نمبر II اس کا اثر ہے۔

123

सूचना: दिलेल्या पर्यायांमधून श्रेणी पूर्ण करणारी योग्य आकृती निवडा.

DIRECTIONS: Complete the series by choosing right figure from the given choices.

ہدایات: دیئے گئے اختیارات میں سے صحیح شکل کو چن کر سیریز کو مکمل کیجیئے

Question Figures

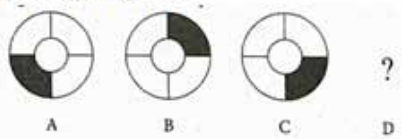

Answer Figures

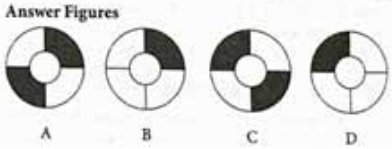

A. (A)

B. (B)

C. (C)

D. (D)

Answer: C. (C)

124

सूचनाः दिलेल्या पर्यायांमधून ऍनालॉगस शब्द निवडा.
एक पेंटागॉन पाचसोबत निगडीत असतो जसा डोडेकागॉन...

DIRECTIONS: Choose the analogous word from the given alternatives.

A Pentagon is related to five in the same way as Dodecagon.

ہدایات: دیے گئے متبادل سے مطابق لفظ کا انتخاب کریں

ایک پینٹاگون کا تعلق پانچ کے ساتھ وہی ہے جو ایک دودکگوں کا ---------- کے ساتھ ہے .

A.बारा
A.Twelve
A. بارہ

B.सात
B.Seven
B. سات

C.अकरा
C.Eleven
C. گیارہ

D.पंधरा
D.Fifteen
D. پندرہ

Answer: A.बारा
A.Twelve
A. بارہ

125 खालीलपैकी शिकण्याचे कोणते पैलू असे आहेत ज्याबद्दल शिक्षक आणि मानसोपचारतज्ञ प्रत्यक्षपणे सर्वात जास्त चिंतित आहेत?

With which of the following aspects of learning are the teachers and psychologists most directly concerned?

سیکھنے کے مندرجہ ذیل پہلوؤں سےکون سے پہلو اساتذہ اور نفسیاتی ماہرین سےبراہ راست متعلق ہیں؟

A.शिकण्याची फळे
A.The products of learning
A.سیکھنے کےنتائج

B.शिकण्याची प्रक्रिया
B.The process of learning
B.سیکھنے کا عمل

C.सवयींचा विकास
C.The development of habits
C.عادات کی ترقی

D.चुका होणे टाळणे
D.The avoidance of errors
D.غلطیوں سے بچنا

Answer: B.शिकण्याची प्रक्रिया
B.The process of learning
B.سیکھنے کا عمل

126 ‘ काळा ’ या शब्दाचा विरुद्धार्थी शब्द कोणता ?

A.पांढरा

B.गोरा

C.धवल

D.वरील सर्व

Answer: D.वरील सर्व

127 भारताचे रक्षा मंत्री कोण आहेत –

The Defence Minister of India is –

ہندوستان کے وزیر دفاع _____ ہیں

A.राजनाथ सिंह
A.Rajnath Singh
A.راجناتھ سنگھ

B.निर्मला सीतारमण
B.Nirmala Sitharaman
B.نرملا سیتھارمن

C.अरुण जेटली
C.Arun Jaitley
C.ارون جیٹلی

D.वेंकय्या नायडू
D.Venkaiah Naidu
D.ونکیا نائیڈو

Answer: B.निर्मला सीतारमण
B.Nirmala Sitharaman
B.نرملا سیتھارمن

128 एका विशिष्ट सांकेतिक भाषेमध्ये, जर REGISTRATION हा शब्द TSIGERNOITAR असा कूटबध्द केला जात असेल, ACCURATE हा शब्द त्या भाषेत कसा कूटबध्द केला जाईल?

In a certain code language, if the word REGISTRATION is coded as TSIGERNOITAR, then how is the word ACCURATE coded in that language?

ایک مخصوص ضابطے کی زبان میں، اگر لفظ REGISTRATION کو TSIGERNOITAR لکھاجاتاہے، تو اس زبان میں لفظ کو ACCURATE کیسے لکھاجائیگا؟

A.UCCAETAR
A.UCCAETAR
A.UCCAETAR

B.UACCETAR
B.UACCETAR
B.UACCETAR

C.UCACETAR
C.UCACETAR
C.UCACETAR

D.UCCATEAR
D.UCCATEAR
D.UCCATEAR

Answer: A.UCCAETAR
A.UCCAETAR
A.UCCAETAR

129 सूचना: अर्थपूर्ण परिच्छेद निर्माण करण्यासाठी, खाली दिलेली (P), (Q) (R), (S) आणि (T) ही पाच वाक्ये योग्य अनुक्रमाने पुनर्रचना करा; त्यांनतर खालील प्रश्नांची उत्तर द्या.
P. कामगाराने मुलाच्या ओरडण्याचा आवाज ऐकला.
Q. तो मदतीसाठी ओरडत होता.
R. मुलगा बुडत होता.
S. त्याने नदीत उडी मारली
T. त्याने स्वतःचे आयुष्य धोक्यात घालून मुलाला वाचविले.

पुनर्रचना केल्यानंतर खालीलपैकी कोणते वाक्य पाचवे असेल?

DIRECTION: Rearrange the following five sentences (P), (Q), (R), (S) and (T) in the proper sequence to form a meaningful paragraph; then answer the questions given below them.
P. A workman heard the boy's shouts.
Q. He shouted for help.
R. The boy was drowning.
S. He plunged into the river.
T. He risked his own life and saved the boy.

Which of the following should be the FIFTH sentence after rearrangement?

ہدایات: ان پانچ جملوں (P)، (Q)، (R)، (S) اور (T) کو با معنی پیرا بنانے کے لئے دوبارہ ترتیب دیجئے، پھر نیچے دے گئے سوالوں کے جواب دیجئے

P. ایک مزدور نے بچھے کی چیکھے سنی.
Q. وو مدد کے لئے چلایا.
R. بچہ ڈوب رہا تھا.
S. وو دریا میں کود گیا.
T. اسنے اپنی جان کا جوکھم اٹھایا اور بچے کو بچایا.

دوبارہ ترییب دینے کے بعد کون سا جملہ پانچوہ ہونا چاہیے؟

For More Info And Videos About TAIT-Exam Syllabus And Other Exam Visit My Channel
BADSHAHimp SubScribe Like & Share YouTube WWW.YouTube/BADSHAHimp

A.T
A.T
A.T

B.S
B.S
B.S

C.P
C.P
C.P

D.Q
D.Q
D.Q

Answer: A.T
A.T
A.T

130 विषयाचे आकलन होण्यामध्ये — चा समावेश असतो

Comprehending a topic includes—

ایک موضوع کی جامعیت مشتمل ہے-

A.भाषांतर
A.Translation
A.ترجمہ

B.एक्स्ट्रापोलेशन (आधीपासून ज्ञात असलेली माहीती भविष्यात वापरण्यासाठी अंदाज करणे)
B.Extrapolation
B. ایکسٹراپولیشن

C.अर्थ लावणे
C.Interpretation
C.تشریح

D.वरील सर्व
D.All the above
D.مذکورہ تمام

Answer: D.वरील सर्व
D.All the above
D.مذکورہ تمام

131 विसरणे हे — म्हणून मानले जाऊ शकते

Forgetting can be considered to be—

بھولنےکو سمجھا جا سکتا ہے-

A.लुप्त होण्याची निष्क्रीय प्रक्रिया
A.A passive process of fading
A.دھندلاہٹ کا ایک غیر فعال عمل

B.चुकीच्या शिक्षणाचा परिणाम
B.The result of incorrect learning
B.غلط سیکھنے کا نتیجہ

C.अपुऱ्या शिक्षणाचा परिणाम
C.The result of insufficient learning
C.ناکافی سیکھنے کا نتیجہ

D.नकारात्मक परिवर्तनाची बाब
D.A case of negative transfer
D.منفی منتقلی کا ایک کیس

Answer: D.नकारात्मक परिवर्तनाची बाब
D.A case of negative transfer
D.منفی منتقلی کا ایک کیس

132 घर्षण हा विषय 5वीच्या विद्यार्थ्यांना शिकवत असताना, एका शिक्षिकेने हे स्पष्ट करण्यासाठी अनेक उदाहरणे दिली की घर्षण आपल्यासाठी अनेक प्रकारे उपयोगी आहे. खालीलपैकी कोणते उदाहरण तिच्याकडून चुकून दिले गेले?

While teaching the topic Friction to class V students, a teacher gave a number of examples to explain that friction is also useful to us in many ways. Which one of the following examples was quoted by her incorrectly?

کلاس پنجم V کے طالب علموں کو رگڑ کا موضوع پڑھاتے ہوئے، ایک استاد کئی مثالیں پیش کر کے یہ وضاحت کرتےہیں کہ رگڑ ہمارے لئے کئی طریقوں سے مفید ہے.اس کی جانب سے مندرجہ ذیل مثالوں میں سے کسے غلط روایت کیا گیاہے؟

A.पेनाचे टोक आणि पेपरमध्ये होणाऱ्या घर्षणामुळे आपण लिहू शकतो
A.We are able to write due to friction between tip of pen and paper
A.ہم قلم اور کاغذ کے درمیان رگڑ کی وجہ سے لکھ سکتے ہیں

B.चपला आणि जमीन यामधील घर्षणामुळे आपण चालु शकतो
B.We can walk because of friction between shoes and ground
B.ہم جوتے اور زمین کے درمیان رگڑ کی وجہ سے چل سکتے ہیں

C.वरच्या दिशेने उंचावर फेकलेली वस्तु घर्षणामुळे नेहेमी खाली येते
C.An object thrown vertically upward always come down to use due to friction
C.ایک جسم جو عمودی طور پر اوپر پھینک دیا جائے ہمیشہ رگڑ کی وجہ سے نیچے آتا ہے

D.ब्रेक लावल्याने वाहन थांबते
D.A vehicle stops on application of brakes
D.ایک گاڑی بریک لگانے پر رک جاتی ہے

Answer: C.वरच्या दिशेने उंचावर फेकलेली वस्तु घर्षणामुळे नेहेमी खाली येते
C.An object thrown vertically upward always come down to use due to friction
C.ایک جسم جو عمودی طور پر اوپر پھینک دیا جائے ہمیشہ رگڑ کی وجہ سے نیچے آتا ہے

133

$$\sqrt[2]{1089} = ?$$

A. 27

B. 23

C. 43

D. 33

Answer: D. 33

134 खालील प्रदूषक वाहतुकीच्या नि:शेष उत्सर्जनात समाविष्ट नाही:

The following pollutant is not contained in the vehicular exhaust emissions:

گاڑیوں سے اخراج ہونے والی آلودگی میں ، موجود نہیں ہے

A.शिस
A.Lead
A. لیڈ

B.अमोनिया
B.Ammonia
B. امونیا

C.कार्बन मोनाक्सॉईड
C.Carbon monoxide
C. کاربن مونوآکسائڈ

D.कणीय वस्तू
D.Particulate matter
D.ذرات

Answer: B.अमोनिया
B.Ammonia
B. امونیا

135 सूचना: अर्थपूर्ण परिच्छेद निर्माण करण्यासाठी, खाली दिलेली (P), (Q) (R), (S) आणि (T) ही पाच वाक्ये योग्य अनुक्रमाने पुनर्रचना करा; त्यांनतर खालील प्रश्नांची उत्तर द्या.
P. कामगाराने मुलाच्या ओरडण्याचा आवाज ऐकला.
Q. तो मदतीसाठी ओरडत होता.
R. मुलगा बुडत होता.
S. त्याने नदीत उडी मारली
T. त्याने स्वतःचे आयुष्य धोक्यात घालून मुलाला वाचविले.

पुनर्रचना केल्यानंतर खालीलपैकी कोणते वाक्य तिसरे असेल?

DIRECTION: Rearrange the following five sentences (P), (Q), (R), (S) and (T) in the proper sequence to form a meaningful paragraph; then answer the questions given below them.
P. A workman heard the boy's shouts.
Q. He shouted for help.
R. The boy was drowning.
S. He plunged into the river.
T. He risked his own life and saved the boy.

Which of the following should be the THIRD sentence after rearrangement?

ہدایات: ان پانچ جملوں (P)، (Q)، (R)، (S) اور (T) کو با معنی پیرا بنانے کے لئے دوبارہ ترتیب دیجئے، پھر نیچے دے گئے سوالوں کے جواب دیجئے

P. ایک مزدور نے بچھے کی چیکھے سنی.
Q. وو مدد کے لئے چلایا.
R. بچہ ڈوب رہا تھا.
S. وو دریا میں کود گیا.
T. اسنے اپنی جان کا جوکھم اٹھایا اور بچے کو بچایا.

دوبارہ ترییب دینے کے بعد کون سا جملہ تیسرا ہونا چاہیے؟

A.P
A.P
A.P

B.Q
B.Q
B.Q

C.R
C.R
C.R

D.S
D.S
D.S

Answer: A.P
A.P
A.P

136 नवोदय शाळांचा हेतू

Purpose of Navodaya schools

نودے اسکول کا مقصد ہے

A.ग्रामीण भागांमध्ये चांगले शिक्षण उपलब्ध करून देणे
A.provide good education in rural areas
A.دیہی علاقوں میں اچھی تعلیم مہیا کرانا

B.रोजगार उपलब्ध करून देणे
B.provide employment
B.روزگاہ فراہم کرنا

C.ग्रामीण भागात काम करीत शिक्षण व शाळेवर नजर ठेवणे
C.to keep an eye on education and school working in rural area
C. دیہی علاقوں میں کام کرنے والوں اسکولوں اور تعلیم پر نگاہ رکھنا

D.वरीलपैकी कोणतेही नाही
D.none of the above
D.درج بالا میں سے کوئی نہیں

Answer: A.ग्रामीण भागांमध्ये चांगले शिक्षण उपलब्ध करून देणे
A.provide good education in rural areas
A.دیہی علاقوں میں اچھی تعلیم مہیا کرانا

137 सूचना: येथे दिलेल्या दोन निवेदनांमधून तार्किकदृष्ट्या सुसंगत पर्याय निवडा, परंतु केवळ एका निवेदानातून नाही.
सर्व मांजरे कुत्री असतात.
कोणतेही कुत्री उंदीर नसतात.

DIRECTION: Select the alternative that logically follows from the two given statements, but not from one statement alone.

All cats are dogs.
No dogs are rats.

ہدایت:وہ متبادل منتخب کریں جو دیے گئے دو بیانات کے مطابق ہے، لیکن اکیلے ایک بیان سے نہیں۔

تمام بلیاں کتے ہیں۔
کوئی کتے چوہے نہیں ہیں۔

A.सर्व मांजरे उंदीर असतात.
A.All cats are rats
A.تمام بلیاں چوہے ہیں۔

B.काही मांजरे उंदीर असतात.
B.Some cats are rats
B.کچھ بلیاں چوہے ہیں۔

C.कोणतेही मांजर उंदीर नसते.
C.No cat is rat
C.کوئی بلی چوہا نہیں ہے۔

D.वरील पैकी कोणतेही नाही
D.None of the above
D.اوپر میں سے کوئی نہیں

Answer: C.कोणतेही मांजर उंदीर नसते.
C.No cat is rat
C.کوئی بلی چوہا نہیں ہے۔

138 जर मुलांना अनेक प्रकारच्या परिस्थितींमध्ये योग्य वृत्ती ठेवण्यासाठी प्रोत्साहन देण्यात शाळेला प्रभावी व्हायचे असेल, तर त्यांनी ------ वर प्रामुख्याने जोर देणे गरजेचे आहे

If the school is to be effective in promoting proper attitudes in children in a wide variety of situations, it needs to place a major emphasis upon—

اگر اسکول مختلف قسم کے حالات میں بچوں میں مناسب رویے کو فروغ دینے میں مؤثر ہو تو، اس پر بنیادی زور دینے کی ضرورت ہے۔

A.तर्कसंगत भेदभावाच्या पायावर अवलंबून त्यांची वृत्ती निवडण्याचे प्रशिक्षण देणे
A.Training children to choose their attitudes on the basis of rational discrimination
A.بچوں کو عقلی امتیاز کی بنیاد پر اپنے رویے کو منتخب کرنے کے لئےتربیت دینا

B.सकारात्मक वृत्तीसह असलेल्या महापुरूषांची माहिती करून देणे ज्यांच्यासह मुले स्वतःला ओळखू शकतील
B.Providing heroes with positive attitudes with which children can identify
B.مثبت رویوں کے ساتھ ہیرو فراہم کرنا جن کے ساتھ بچے شناخت کر سکیں

C.सकारात्मक वृत्तीच्या प्रदर्शनाला बक्षीस देणे
C.Rewarding the display of positive attitudes
C.مثبت رویوں کی نمائش کے لئے انعام دینا

D.नकारात्मक वृत्तीच्या प्रदर्शनाला शिक्षा देणे
D.Punishing the display of negative attitudes
D.منفی رویوں کی نمائش کے لئے سزا دینا

Answer: C.सकारात्मक वृत्तीच्या प्रदर्शनाला बक्षीस देणे
C.Rewarding the display of positive attitudes
C.مثبت رویوں کی نمائش کے لئے انعام دینا

139 **सूचना:** खालील प्रश्नात असे 3 घटक आहेत ज्यांचा परस्परांशी विशिष्ट संबंध आहे. समान संबंध वर्तुळाच्या संचांनी दर्शविलेला आहे, प्रत्येक वर्तुळ त्याचा आकार कितीही असला तरी, एका घटकाचे प्रतिनिधित्व करते. योग्य वर्तुळाच्या संचांशी खालील घटकांच्या जोड्या लावा.

DIRECTION: The question below has three items having certain relationship among them. The same relationship is expressed by sets of circles, each circle representing one item irrespective of its size. Match the items with right set of circles.

ہدایت: مندرجہ ذیل سوال میں تین آئٹم ہیں جن کے مابین مختلف تعلقات ہیں۔ دائروں کے ایک سیٹ کے ذریعہ یکساں تعلق ظاہر کیا جاتا ہے، ہر دائرہ سائز سے قطع نظر ایک آئٹم کی نمائندگی کرتا ہے۔ آئٹم کو دائروں کے درست سیٹ کے ساتھ ملائیں۔

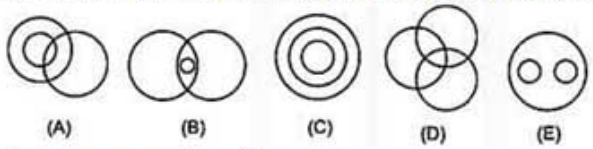

संगणक कुशल, पदवीधर, नोकरदार

Computer skilled, Graduates, Employed.

کمپیوٹر ماہر، گریجویٹ، ملازم۔

A. (A)

B. (D)

C. (B)

D. (E)

Answer: B. (D)

140	मागच्या वर्षी किती महिन्यांमध्ये २८ दिवस होते? How many month/s had only 28 days in the previous year? گذشتہ سال میں کتنے ماہ/مہینوں میں صرف 28 دن تھے؟
	A.1 A.1 A.1
	B.2 B.2 B.2
	C.3 C.3 C.3
	D.यांपैकी कोणतेही नाही D.None of these D.ان میں سے کوئی نہیں
Answer:	D.यांपैकी कोणतेही नाही D.None of these D.ان میں سے کوئی نہیں
141	‘ हर्ष ’ या शब्दाचा समानार्थी शब्द कोणता ?
	A.वर्ष
	B.कर्ष
	C.दु:ख
	D.आनंद
Answer:	D.आनंद

142 निर्देश: खालील प्रश्न दिलेल्या शब्दांवर आधारित आहेत.

Upper/ Minority/ Sentinel/ Sponsor

जर प्रत्येक शब्दासमोर 'S' ठेवले तर किती अर्थपूर्ण शब्द तयार होतील:

DIRECTIONS: Following question is based on the given words.

Upper/ Minority/ Sentinel/ Sponsor

If ‘S’ is placed before every word then how many meaningful words will be formed:

ہدایت جیل کے سوال دے ہے لفجونپر مشتمل ہیں

Upper/ Minority/ Sentinel/ Sponsor

‘S’ ہر لفج کے سامنے اگر یس لگایا جائے تو کتنے سہی لفج بنتے ہیں؟

A.एक
A.One
A.ایک

B.दोन
B.Two
B.دو

C.तीन
C.Three
C.تین

D.चार
D.Four
D.چار

Answer: A.एक
A.One
A.ایک

143 **सूचना**: दिलेल्या चारांपैकी वेगळी (असंबद्ध) असणारी आकृती शोधून काढा.

DIRECTIONS: Select the odd from the given four figures.

ہدایات: دیئے گئے چار شکلوں میں سے طاق شکل چنیئے۔

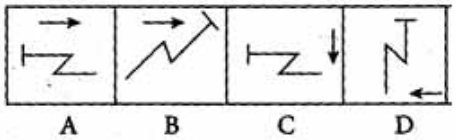

A. (A)

B. (B)

C. (C)

D. (D)

Answer: B. (B)

144 दिलेली अदलाबदल : चिन्हे - आणि ×, तसेच आकडे 3 आणि 5 ; तर 2 × 5 - 3 चे मूल्य किती ?

Given interchanges: signs - and ×, and numbers 3 and 5; then the value of 2 × 5 - 3 is

دیئے گئے تبادلے: علامات - اور ×، اور نمبر 3 اور 5؛ تو 2 × 5 - 3 کی تعداد ہے

A.5
A.5
A.5

B.-13
B.-13
B.-13

C.4
C.4
C.4

D.-4
D.-4
D.-4

Answer: B.-13
B.-13
B.-13

145 “मुलास मुलासारखीच वागणूक दिली पाहिजे” असे यांनी म्हटले

“Child should be treated as a child” was said by

"بچے کو بچے کے طور پر برتاو کیا جانا چاہے" کس نے کہا تھا

A.राओसान
A.Roussone
A.روسون

B.वॉचलर
B.Wechsler
B.ویشلر

C.बीनेट
C.Binet
C.بنیٹ

D.गॉन्ये
D.Gagne
D.گیگن

Answer: B.वॉचलर
B.Wechsler
B.ویشلر

146 सूचना: प्रत्येक प्रश्नाला एक प्रमुख विधानासोबत चार विधाने आहेत ज्यांच्याखाली A, B, C, आणि D असे चार विधान आहेत. क्रमवार विधानांची जोडी निवडा ज्यामध्ये प्रथम विधान दुसऱ्या विधानाला सुचवते, आणि दोन्ही विधाने तर्किकदृष्ट्या प्रमुख विधानासोबत निगडित असेल.

जेव्हा आपण सत्य बोलता, तेव्हा आपल्याला शांत वाटते
A. तुम्ही सत्य बोललात
B. तुम्हाला शांत वाटले
C. तुम्ही सत्य बोलले नाही
D. तुम्हाला शांत वाटत नाही

DIRECTIONS: Each question has a main statement followed by four statements labelled A, B, C and D. Choose the ordered pair of statements, where the first statement implies the second, and the two statements are logically consistent with the main statement.

When you speak truth , you feel peace
A. You spoke truth
B. You felt peace
C. You did not speak truth
D. You did not feel peace

ہدایت: ہر سوال میں ایک جملہ ہے جسکے بعد چار جملےاے، بی،سی اور ڈی کے نام سے دئے گئے ہیں اسمیں منسلک جوڑیوں کو چنئے۔ جہاں پہلا جملہ دوسرے جملہ کی اور اشارہ کر رہا ہے اور دو جملے منطقی مرکزی بیان کے مطابق ہیں

جب آپ سچ بولتے ہیں تو مطمئن رہتے ہیں
Aآپ نے سچ بولا ۔
Bآپ مطمئن رہے ۔
Cآپ نے سچ بولا ۔
Dآپ مطمئن نہیں رہے ۔

A.AB
A.AB
A.AB

B.BA
B.BA
B.BA

C.DA
C.DA
C.DA

D.CD
D.CD
D.CD

Answer: A.AB
A.AB
A.AB

147 कोणत्या वयात शारीरिक वाढ झपाट्याने होते

In which stage is physical growth rapid

اس مرحلہ میں جسمانی ترق تیزی سے ہوتی ہے

A.सुरुवातीचे बालपण
A.early childhood
A.ابتدائی بچپن

B.अर्भकावस्थ
B.infancy
B.شیرخوارگی

C.पौगंडावस्था
C.adolescence
C.سن بلوغت

D.शालेय वय
D.school age
D.اسکول کی عمر

Answer: B.अर्भकावस्थ
B.infancy
B.شیرخوارگی

148 निर्देश: पुढील प्रश्नांपैकी प्रत्येक प्रश्नात एक संख्या गहाळ आहे. मालिकेचा नमुना समजून घ्या आणि योग्य संख्या निवडा.

6, 126, ..., 9, 108, 12, 7, 133, 19, 12, 72, 6

DIRECTION: In each of the following questions, one number is missing in the series. You have to understand the pattern of the series and insert the number.

6, 126, ..., 9, 108, 12, 7, 133, 19, 12, 72, 6

ہدایت جیل کے ہر سوال میں سرج کا ایک نمبر گمشدہ ہے . آپکو اس سرج کو سمجھنا ہے. اور گمشدہ نمبر کو یہا کھوجنا ہے.

6, 126, ..., 9, 108, 12, 7, 133, 19, 12, 72, 6

A.21
A.21
A.21

B.23
B.23
B.23

C.30
C.30
C.30

D.35
D.35
D.35

Answer: A.21
A.21
A.21

149 ‘ लग्नाला खूप लोकांनी हजेरी लावली.’ या वाक्यातील विशेषण ओळखा.

A.लग्नाला

B.खूप

C.लोकांनी

D.हजेरी

Answer: B.खूप

150 Out of the given four words only one is not spelt correctly. Find the word that is not correctly spelt.

A.Apparantely

B.Accidentally

C.Occasionally

D.Definitely

Answer: A.Apparantely

151 **सूचना:** दिलेल्या पर्यायांमधून श्रेणी पूर्ण करणारी योग्य आकृती निवडा.

DIRECTIONS: Complete the series by choosing right figure from the given choices.

ہدایات: دیئے گئے اختیارات میں سے صحیح شکل کو چن کر سیریز کو مکمل کیجیئے

Problem Figure

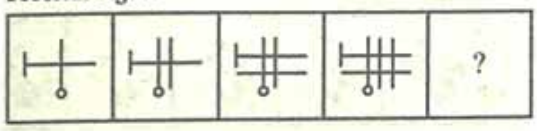

Answer Figures

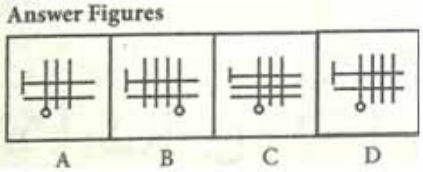

A. (A)

B. (B)

C. (C)

D. (D)

Answer: D. (D)

152 कोणता पर्यावरणविषयक नैतिकतेचे सिद्धांत नाही?

Which is not a theory of environmental ethics?

درجذیل میں سے کون سا ماحولیاتی اخلاقیات کا ایک اصول نہیں ہے؟

A.मानवपुर्वकेंद्रिकता
A.Anthropocentricism
A.اینتھراپوسینٹریسزم

B.द्विमध्यता
B.Biocentrism
B.بایو سینٹرزم

C.नैतिक केंद्रबिंदू
C.Ethnocentrism
C.ایتھنو سینٹرزم

D.पर्यावरणमध्यता
D.Eco centrism
D.ایکو سینتریزم

Answer: B.द्विमध्यता
B.Biocentrism
B.بایو سینٹرزم

153 पियाजेचे तत्त्व मुलाच्या याच्याशी संबंधित आहे

Piaget’s principle is related to child’s

بچے کے تعلق سے پیجیٹ کا اصول ہے

A.मानसिक विकास
A.psychological development
A.نفسیاتی فروغ

B.भावपूर्ण भावना
B.emotional feelings
B.جذباتی احساسات

C.बोधात्मक विकास
C.cognitive development
C.حواس کی ترقی

D.शारीरिक विकास
D.physical development
D.جسمانی ترقی

Answer: C.बोधात्मक विकास
C.cognitive development
C.حواس کی ترقی

154 शिकविण्याचे नियोजन — शी संबंधित नसते

Planning of teaching is not related with—

تعلیم کی منصوبہ بندی --- سے متعلق نہیں ہے-

A.कार्याचे विश्लेषण
A.Analysis of Task
A.ٹاسک کا تجزیہ

B.शिक्षणाची उद्दिष्टे स्पष्ट ओळखणे
B.Identification of teaching objectives
B.تدریس کے مقاصد کی شناخت

C.वर्तणुकीच्या संज्ञांमध्ये शिक्षणाची उद्दिष्टे लिहून काढणे
C.Writing of learning objectives in behavioural terms
C.رویے کی شرائط میں سیکھنے کے مقاصد کی تحریر

D.वर्ग व्यवस्थापन
D.Class management
D.کلاس مینجمنٹ

Answer: D.वर्ग व्यवस्थापन
D.Class management
D.کلاس مینجمنٹ

155 सूचना: खालील प्रश्नांमध्ये दिलेल्या पर्यायांमधून संबंधित अक्षर समूह निवडा.

JLNP : OMKI :: SUWY : ?

DIRECTIONS: In the following question, select the related group of letters from the given alternatives.

JLNP : OMKI :: SUWY : ?

سمت: مندرجہ ذیل سوال میں، دیے گئے متبادل میں سے حروف کا متعلقہ گروپ منتخب کریں۔

JLNP : OMKI :: SUWY : ?

A.MLKJ
A.MLKJ
A.MLKJ

B.PLHD
B.PLHD
B.PLHD

C.XVTR
C.XVTR
C.XVTR

D.FGHI
D.FGHI
D.FGHI

Answer: C.XVTR
C.XVTR
C.XVTR

156 $\frac{(7)^3 + (3)^3}{(7)^2 - 21 + (3)^2} = ?$

A. 5

B. 20

C. 10

D. 30

Answer: C. 10

157 यापैकी कोणती आकृती प्रवासी, रेल्वे आणि बस यांच्या दरम्यानचे नाते दर्शवते?

Which of the following diagrams indicates the best relation between Travelers, Train and Bus?

مندرجہ ذیل ڈایاگراموں میں سے کون سی مسافر، ٹرین اور بس کے درمیان بہترین رشتہ ظاہر کرتی ہے؟

(A) 

(B) 

(C) 

(D) 

Answer: (C) 

158 सूचना: खालील माहिती वाचा आणि खालील दिलेल्या प्रश्नांची उत्तरे द्या:
एका क्लबमध्ये आठ सदस्य, A, B, C, D, E, F, G आणि H हे आयताकृती टेबलभोवती बसलेले आहेत. आठपैकी चार जण टेबलच्या कोप-यात बसून बाहेरील बाजूला बघत आहेत, तर इतर चार टेबलच्या बाजूंच्या मध्यभागी बसलेले आहेत आणि टेबलच्या मध्यभागाकडे बघत आहेत.
D हा G च्या उजव्या बाजूला तिसऱ्या क्रमांकावर बसला आहे. E हा C च्या डाव्या बाजूला तिसऱ्या क्रमांकावर बसला आहे. G मध्याभागाकडे बघत आहे. केवळ एक व्यक्ती E आणि F च्या मध्ये बसतो. F हा C च्या तत्काळ शेजारी नाही. H मध्याभागाकडे बघत आहे. A हा F चा तत्काळ शेजारी नाही. C कोपऱ्यांच्या मध्यभागाला बसलेला नाही. A आणि B कर्णरिषेमध्ये एकमेकांच्या अगदी समोरासमोर बसलेले आहेत.
खालीलपैकी कोणते बैठक व्यवस्थेबाबत खरे आहे?

DIRECTIONS: Read the following information and answer the questions given below:
In a club, eight members A, B, C, D, E, F, G and H are sitting around a rectangular table. Out of eight, four sit at corners of a table and face outside, while other four sit in the middle of the sides of the tables and face towards centre of the table.
D sits third to the right of G. E sits third to the left of C. G faces the centre. Only one person sits between E and F. F is not the immediate neighbour of C. H faces the centre. A is not an immediate neighbour of F. C does not sit in the middle of the sides. A and B are sitting diagonally opposite to each other.
Which of the following is true regarding the seating arrangement?

ہدایات: مندرجہ ذیل معلومات کو پڑھیں اور نیچے دیے گئے سوالوں کے جواب دیں۔
ایک مستطیل میز کے ارد گرد بیٹھے ہوئے ہیں۔ آٹھ میں سے، چار میز کے کناروں H اور A، B، C، D، E، F، G ایک کلب میں آٹھ ممبر پر بیٹھے ہیں اور ان کا رخ باہر کی طرف ہے، جبکہ چار میز کے کناروں کے درمیان میں بیٹھے ہیں اور ان کا رخ میز کے مرکز کی طرف ہے۔
D، G کی F اور E کا رخ مرکز کی طرف ہے۔ G کے بائیں سے تیسرے پر بیٹھا ہے۔ E، C کے دائیں سے تیسرے نمبر پر بیٹھا ہے۔ C کا فوری پڑوسی نہیں ہے۔ A، F کا رخ مرکز کی طرف ہے۔ H کا فوری پڑوسی نہیں ہے۔ F، C درمیان صرف ایک شخص بیٹھا ہے۔
وتری طور پر ایک دوسرے کے مخالف بیٹھے ہوئے ہیں۔ B اور A کناروں کے درمیان نہیں بیٹھا ہوا ہے۔
بیٹھنے کے انتظام سے متعلق مندرجہ ذیل میں سے کون درست ہے؟

A.A च्या तत्काळ उजवीकडे E आहे
A.Immediate right of A is E
A.A کے فوری دائیں طرف Eہے

B.A, G आणि D चे बाहेर बघत आहेत
B.A, G and D face outside
B.A، G اور D کا رخ باہر کی طرف ہے

C.F, H आणि B मध्यभागी बघत आहेत
C.F, H and B faces centre
C.F، H اور B کا رخ مرکز کی طرف ہے

D.B च्या तत्काळ उजवीकडे F आहे
D.F is the immediate right of B
D.F ، B کے فوری بائیں طرف ہے

Answer: D.B च्या तत्काळ उजवीकडे F आहे
D.F is the immediate right of B
D.F ، B کے فوری بائیں طرف ہے

159 DIRECTIONS: A sentence with an underlined phrasal verb is given below. Out of the four options, choose the one which can be substituted for the given phrasal Verb.
Fighting broke out among the prisoners in the prison cells.

A.ended finally

B.started suddenly

C.paused for a while

D.were sorted out

Answer: B.started suddenly

160 सूचना: खालील माहिती वाचा आणि खालील दिलेल्या प्रश्नांची उत्तरे द्या:
एका क्लबमध्ये आठ सदस्य, A, B, C, D, E, F, G आणि H हे आयताकृती टेबलभोवती बसलेले आहेत. आठपैकी चार जण टेबलच्या कोप-यात बसून बाहेरील बाजूला बघत आहेत, तर इतर चार टेबलच्या बाजूंच्या मध्यभागी बसलेले आहेत आणि टेबलच्या मध्यभागाकडे बघत आहेत.
D हा G च्या उजव्या बाजूला तिसऱ्या क्रमांकावर बसला आहे. E हा C च्या डाव्या बाजूला तिसऱ्या क्रमांकावर बसला आहे. G मध्याभागाकडे बघत आहे. केवळ एक व्यक्ती E आणि F च्या मध्ये बसतो. F हा C च्या तत्काळ शेजारी नाही. H मध्याभागाकडे बघत आहे. A हा F चा तत्काळ शेजारी नाही. C कोपऱ्यांच्या मध्यभागाला बसलेला नाही. A आणि B कर्णरिषेमध्ये एकमेकांच्या अगदी समोरासमोर बसलेले आहेत.
Cच्या संदर्भामध्ये Aची स्थिती काय असेल?

DIRECTIONS: Read the following information and answer the questions given below:
In a club, eight members A, B, C, D, E, F, G and H are sitting around a rectangular table. Out of eight, four sit at corners of a table and face outside, while other four sit in the middle of the sides of the tables and face towards centre of the table.
D sits third to the right of G. E sits third to the left of C. G faces the centre. Only one person sits between E and F. F is not the immediate neighbour of C. H faces the centre. A is not an immediate neighbour of F. C does not sit in the middle of the sides. A and B are sitting diagonally opposite to each other.
What is the position of A with respect to C?

ہدایات: مندرجہ ذیل معلومات کو پڑھیں اور نیچے دیے گئے سوالوں کے جواب دیں۔
ایک مستطیل میز کے ارد گرد بیٹھے ہوئے ہیں۔ آٹھ میں سے، چار میز کے کناروں H اور A، B، C، D، E، F، G ایک کلب میں آٹھ ممبر پر بیٹھے ہیں اور ان کا رخ باہر کی طرف ہے، جبکہ چار میز کے کناروں کے درمیان میں بیٹھے ہیں اور ان کا رخ میز کے مرکز کی طرف ہے۔
D، G کے دائیں سے تیسرے نمبر پر بیٹھا ہے۔ E، C کے بائیں سے تیسرے پر بیٹھا ہے۔ G کی F اور E کا رخ مرکز کی طرف ہے۔
C کا فوری پڑوسی نہیں ہے۔ A، F درمیان صرف ایک شخص بیٹھا ہے۔ F، C کا فوری پڑوسی نہیں ہے۔ H کا رخ مرکز کی طرف ہے۔
وتری طور پر ایک دوسرے کے مخالف بیٹھے ہوئے ہیں۔ B اور A کناروں کے درمیان نہیں بیٹھا ہوا ہے۔
C کے تعلق سے A کی پوزیشن کیا ہے؟

A.डावीकडून चौथा
A.Fourth to the left
A.بائیں سے چوتھا

B.डावीककडून दुसरा
B.Second to the left
B.بائیں سے دوسرا

C.उजवीकडून पाचवा
C.Fifth to the right
C.دائیں سے پانچواں

D.एकमेकांकडे समोरासमोर तिरपे बसलेले आहेत.
D.Sit diagonally opposite to each other
D.وتری طور پر ایک دوسرے کے مخالف بیٹھے ہیں

Answer: B.डावीककडून दुसरा
B.Second to the left
B.بائیں سے دوسرا

161 345 × 678 = ?

345 × 678 = ?

345 × 678 = ?

A.244500
A.244500
A.244500

B.233590
B.233590
B.233590

C.233910
C.233910
C.233910

D.255410
D.255410
D.255410

Answer: C.233910
C.233910
C.233910

162	1.2 रू. चे रू. 2.4 शी गुणोत्तर शोधा Find the ratio of Rs. 1.2 to Rs. 2.4? روپیہ 1.2 کے مقابلہ روپیہ 2.4 کا تناسب معلوم کریں؟
	A.2:1 A.2:1 A.2:1
	B.1:2 B.1:2 B.1:2
	C.3:2 C.3:2 C.3:2
	D.2:3 D.2:3 D.2:3
Answer:	B.1:2 B.1:2 B.1:2

163	खालीलपैकी स्त्रीलिंगी शब्द ओळखा.
	A.रुमाल
	B.धोतर
	C.पागोटे
	D.ओढणी
Answer:	D.ओढणी

164	150 किमी/ता ला मी/मि (मीटर/ मिनिटे) मध्ये रूपांतरित करा. Convert 150 km/h into m/min? 150کلومیٹر/گھنٹہ کو میٹر/منٹ میں بدلیں؟

A.2000 मी/मि
A.2000 m/min
A.2000میٹر/منٹ

B.3000 मी/मि
B.3000 m/min
B.3000میٹر/منٹ

C.3500 मी/मि
C.3500 m/min
C.3500میٹر/منٹ

D.2500 मी/मि
D.2500 m/min
D.2500میٹر/منٹ

Answer: D.2500 मी/मि
D.2500 m/min
D.2500میٹر/منٹ

165 DIRECTIONS: A sentence with an underlined word is given below. Find the word which is opposite in meaning to the underlined word from the given options.
He reluctantly agrees to do his duty.

A.Willingly

B.Unwillingly

C.Forcibly

D.Involuntarily

Answer: A.Willingly

166 p परिमिती असलेल्या, समद्विभुज काटकोन त्रिकोणाचे क्षेत्रफळ काय असेल:

The area of an isosceles right triangle, whose perimeter is p, is:

ایک متساوی الساقین مثلث قائمہ کا رقبہ، اسکا احاطہ p ہے:

(A) $\frac{p^2}{2+\sqrt{2}}$

(B) $\frac{p^2}{2(2+\sqrt{2})}$

(C) $\frac{p^2}{12+8\sqrt{2}}$

(D) $\frac{p^2}{6+4\sqrt{2}}$

Answer: (C) $\frac{p^2}{12+8\sqrt{2}}$

167 लोकसभेचे सभाअध्यक्ष:

The speaker of the Lok Sabha is:

لوک سبھا کا اسپیکر

A.निवडणूक आयोग द्वारे नामनिर्देशित
A.Nominated by the Election Commission
A.الیکشن کمیشن کی طرف سے نامزد

B.लोकसभेत बहुसंख्य पक्षाच्या सदस्यांद्वारे निवडलेले
B.Elected by the members of the majority party in the Lok Sabha
B. لوک سبھا میں اکثریت پارٹی کے ارکان کی طرف سے منتخب

C.राष्ट्रपतीद्वारे नियुक्त केले जातो.
C.Appointed by the President.
C. صدر کی طرف سے مقرر.

D.लोकसभेच्या सर्व सदस्यांद्वारे निवडले जातात
D.Elected by all the members in the Lok Sabha
D. لوک سبھا میں تمام اراکین کی جانب سے منتخب

Answer: D.लोकसभेच्या सर्व सदस्यांद्वारे निवडले जातात
D.Elected by all the members in the Lok Sabha
D. لوک سبھا میں تمام اراکین کی جانب سے منتخب

168 गहाळ संज्ञा शोधा?

Find the missing term?

گمنام نمبر کیا ہے ؟

7	51	2
6	40	4
5	28	?

A. 1

	B. 3
	C. 2
	D. 0
Answer:	B. 3

169	‘ महर्षी ’ या शब्दाची संधी सोडवा.
	A.म + हर्षी
	B.महा + ऋषी
	C.महान + ऋषी
	D.मह + ऋषी
Answer:	B.महा + ऋषी

170	या परिस्थितीचे विश्लेषण करा, “एक विद्यार्थी काही कारणामुळे बेशुद्ध होतो”. एक शिक्षक म्हणून तुमची पहिली प्राथमिकता काय असायला हवी Analyse the situation, “A student is unconscious because of some reason”. What should be your first priority as a teacher? صورت حال کا تجزیہ کریں، "کسی وجہ سے کسی طالب علم بے ہوش ہے"۔ استاد کے طور پر آپ کی پہلی ترجیح کیا ہونی چاہئے؟
	A.मुख्याध्यापकांना कळवणे A.Inform principal sir A.پرنسپل صاحب کو مطلع کریں
	B.विद्यार्थ्याच्या पालकांना कळवणे B.Inform parents of the student B.طالب علم کے والدین کو مطلع کریں
	C.त्याला मीठ + साखर पाण्याचे मिश्रण पिण्यास देणे C.Giving him salt + water sugar to drink C.اسے نمک دینا + پینے کے لئے میٹھا پانی دینا
	D.तुम्ही कोणतीही प्रतिक्रिया दर्शवणार नाही D.You will give no reaction D.آپ کوئی ردعمل نہیں دیں گے

Answer: C.त्याला मीठ + साखर पाण्याचे मिश्रण पिण्यास देणे
C.Giving him salt + water sugar to drink
C.اسے نمک دینا + پینے کے لئے میٹھا پانی دینا

171

दिले आहेः
1. A हा Bचा भाऊ आहे.
2. C हा A चा भाऊ आहे.
3. D हा E चा भाऊ आहे.
4. E ही B ची बहीण आहे.

मग D चा काका आहे

Given that:
1. A is brother of B.
2. C is brother of A.
3. D is brother of E.
4. E is daughter of B.

Then uncle of D is

دیا گیا :
1. A B کا بھائی ہے.
2. C A کا بھائی ہے.
3. D E کا بھائی ہے.
4. E B کی بیٹی ہے.
تو D کا چچا ہے

A.A
A.A
A.A

B.B
B.B
B.B

C.E
C.E
C.E

D.ठरवता येणार नाही
D.Can't be determined
D.مقرر نہیں کیا جاتا

Answer:

A.A
A.A
A.A

172	[{(16 ÷ 4) × 4} ÷ 4] = ? [{(16 ÷ 4) × 4} ÷ 4] = ? [{(16 ÷ 4) × 4} ÷ 4] = ?
	A.2 A.2 A.2
	B.3 B.3 B.3
	C.4 C.4 C.4
	D.5 D.5 D.5
Answer:	C.4 C.4 C.4

173	A sentence with an underlined idiomatic expression is given. What is the meaning of the idiomatic expression ‘Thorn in one's side’ in the sentence given below? Money problems have been a <u>thorn in our side</u> since the day we got married.
	A.Someone or something that continually causes problems for you
	B.Someone or something that has always been beneficial or favourable
	C.Someone or something that has always been inspiring
	D.None of the above
Answer:	A.Someone or something that continually causes problems for you

174 सीपीआर दरम्यान शरीराचा कोणता भाग दाबला जातो?

Which body part is compressed during CPR?

سی پی آر (CPR) کے دوران بدن کے کس حصے کو دبایا جاتا ہے؟

A.पोट
A.Stomach
A.پیٹ

B.छाती
B.Chest
B.سینہ

C.डोकं
C.Head
C.سر

D.पाय
D.Legs
D. پیر

Answer: B.छाती
B.Chest
B.سینہ

175 वनस्पतीमध्ये वायूच्या आदान-प्रदानास मदत करणारे लहान छिद्र आहेत ते काय म्हणून ओळखले जातात?

What are the tiny pores that help in exchange of gases in the plants known as?

pores کیا ہیں؟ کے طور پر جانا جاتا ہے کے پودوں میں گیسوں کے تبادلے میں مدد ہے کہ چھوٹے

A.रंध्र
A.Stomata
A.سٹوماتا

B.श्वासरंध्र
B.Spiracles
B.اسپائریکلس

C.श्वासनलीका
C.Tracheae
C.ٹراچی) ہوا کی نلی)

D.खवले
D.Gills
D.گلیوں

Answer: A.रंध्र
A.Stomata
A.سٹوماتا

176 जर तुम्हाला ग्रॅमी पुरस्कार मिळाला, तर तुम्ही कशामध्ये उत्कृष्ट आहात –

If you get a Grammy Award, then you have excelled in –

اگر آپ کو گریمی انعام ملتا ہے، تو آپ نے _____ مہارت پیدا کی ہے

A.अभिनय
A.Acting
A.ایکٹنگ

B.स्क्रिप्ट-लिखाण
B.Script-writing
B.اسکرپٹ رائٹنگ

C.पत्रकारिता
C.Journalism
C.جرنلزم

D.संगीत
D.Music
D.میوزک

Answer: D.संगीत
D.Music
D.میوزک

177 या टप्प्यात मूल मोकळे सोडले असताना त्याचे स्वतःहून पुढाकार घेण्याचे कौशल्य विकसित होते

The stage in which the self initiative skill of a child develops when it is let free

عمر کا وہ مرحلہ جس میں اسے آزاد چھوڑ دیا جاتا ہے تو بچہ میں خود اقدام کرنے کی مہارت پیدا ہوتی ہے

A.2 ते 3 वर्ष
A.2 to 3 year
A.2 سے 3 سال

B.प्रथम वर्ष
B.first year
B.پہلا سال

C.6वे वर्ष
C.6th year
C.چھٹا سال

D.4-6 वर्ष
D.4-6 years
D.4-6 سال

Answer: A.2 ते 3 वर्ष
A.2 to 3 year
A.2سے 3 سال

178 40, 35, 30, … मालिकेतील कितव्या अनुक्रमाचे पद हे पहिले ऋण(-) पद आहे ?

Which term of the series 40, 35, 30, … is the first negative term?

40, 35, 30, اس سرج کی کتوی ٹرم یہ نیگیٹو ہے ?

A.8वे
A.8th
A.8واں

B.10वे
B.10th
B.10واں

C.12वे
C.12th
C.12واں

D.14वे
D.14th
D.14واں

Answer: B.10वे
B.10th
B.10واں

179

सरळ रूप द्या:
6243102 + 1200102 = ?

Simplify:
6243102 + 1200102 = ?

آسان بنائیں:
6243102 + 1200102= ?

A.7443204
A.7443204
A.7443204

B.7443304
B.7443304
B.7443304

C.7442204
C.7442204
C.7442204

D.7443224
D.7443224
D.7443224

Answer:

A.7443204
A.7443204
A.7443204

180

हाडे खत म्हणून वापरतात कारण त्यामध्ये हे वनस्पतीसाठी पोषक तत्व असते

Bone is used as a fertilizer because
it contains the plant nutrient

ہڈی کو کھاد کے طور پر استعمال کیا جاتا ہے کیونکہ اس میں پودے کی غذائیت ہوتی ہے

A.नायट्रोजन
A.Nitrogen
A.نائٹروجن

B.ऑक्सिजन
B.Oxygen
B.آکسیجن

C.सोडियम
C.Sodium
C.سوڈیم

D.कॅल्शियम
D.Calcium
D.کیلشیم

Answer: D.कॅल्शियम
D.Calcium
D.کیلشیم

181 इच्छिलेली वस्तू देणारे झाड --------

A.वटवृक्ष

B.बोधिवृक्ष

C.कल्पवृक्ष

D.ईक्ष्वाकू

Answer: C.कल्पवृक्ष

182 सूचना: दिलेल्या पर्यायांमधून वेगळे ते बाहेर काढा.

DIRECTIONS: Find the odd one out from the given alternatives.

سمت: دیے گئے متبادل میں سے بے جوڑ کو تلاش کرو۔

A.ABB
A.ABB
A.ABB

B.BCC
B.BCC
B.BCC

C.CCCDDDD
C.CCCDDDD
C.CCCDDDD

D.DDDDEEEEE
D.DDDDEEEEE
D.DDDDEEEEE

Answer: B.BCC
B.BCC
B.BCC

183 एकसारख्या जुळ्यांवर केलेल्या शौच प्रशिक्षणावरील संशोधन याचे महत्त्व स्पष्ट करते

Research on toilet training conducted with identical twins illustrates the importance of

ہمہو جڑواں بچے کے ساتھ منعقد ٹوائلٹ کی تربیت کی تحقیق کس کی اہمیت کی وضاحت کرتا ہے

A.परिपक्वता
A.maturation
A.مکمل نشونما

B.रोपण
B.implanting
B.نصب کرنا

C.संगोपन
C.nurture
C.پرورش

D.आनुवंशिकता
D.genetics
D.نسلی

Answer: A.परिपक्वता
A.maturation
A.مکمل نشونما

184 सूचना: दिलेल्या पर्यायांमधून वेगळे ते बाहेर काढा.

DIRECTIONS: Find the odd one out from the given alternatives.

سمت: دیے گئے متبادل میں سے بے جوڑ کو تلاش کرو۔

A.41
A.41
A.41

B.43
B.43
B.43

C.53
C.53
C.53

D.57
D.57
D.57

Answer: D.57
D.57
D.57

185 वेब सर्वरवर स्थित एक किंवा अधिक पाने ज्याला वेब..... म्हणतात.

A web _____ consists of one or more Web pages located on a Web server.

ایک ویب ـــــــــ ویب سرور پر آنے والا ایک یا زیادہ ویب صفحات پر مشتمل ہئے۔

A.हब
A.Hub
A.ہب

B.साईट
B.Site
B.سائٹ

C.स्टोरी
C.Story
C.اسٹوری

D.टिम्प्लेट
D.Template
D.ٹیمپلیٹ

Answer: B.साईट
B.Site
B.سائٹ

186 Out of the four alternatives, choose the one which can be substituted for the given words/sentence.
A person who is blamed for something that someone else has done

A.Scapegoat

B.Athlete

C.Bibliophile

D.Volunteer

Answer: A.Scapegoat

187 जर एक सहकारी एका अल्पसंख्याक गटातील आहे आणि विचाराने पुष्कळ प्रगतीशील आहे, उत्तम संबंध राहाण्यासाठी मूलभूत पाया म्हणून — हे ओळखणे असेल

If a colleague belongs to the minority group and is quite progressive in views, the basis of maintenance of healthy relations will be the realization of that—

اگر ایک ساتھی اقلیت گروپ سے تعلق رکھتا ہے اور خیالات میں بہت ترقی پذیر ہے تو، صحت مند تعلقات کی بحالی کی بنیاد اس کی وضاحت کرے گی،کہ-

A.गळेकापू स्पर्धा—कारण तुम्ही मानून चालाल की त्याच्यामध्ये सांस्कृतिक उणीवा आहेत
A.The cut-throat competition—as you assume that he is having cultural handicaps
A.-کانٹے دار مقابلہ—جیسا کہ آپ سمجھتے ہیں کہ وہ ثقافتی معذور ہے

B.उच्च पातळीचा स्वार्थीपणा—कारण तुम्हाला वाटेल की ती व्यक्ती त्याच्या गुंतलेल्या हितासाठी कोणत्याही पायरीला जाईल
B.High selfishness—because you feel that the person will go to any extent for his vested interests
B.اعلی خودغرضی—کیونکہ آپ محسوس کرتے ہیں کہ کسی شخص کو اپنی دلچسپی کے لئے کسی حد تک جانا ہوگا

C.उच्च पातळीवर मत्सरी वृत्ती—असे मानून की तो अल्पसंख्यांक गटाचा असल्यामुळे सर्व फायदे उठवत आहे
C.Highly jealous attitude—assuming that he is relishing all benefits due to minority group
C.-انتہائی حاسدانہ رویہ— یہ فرض کرنا کہ اس کے تمام فوائد کی بنیاد اس کا اقلیت ہونا ہے

D.हा स्तर प्राप्त करण्यासाठी त्याने केलेले परिश्रम
D.The hard-work he has done to achieve the status.
D.اس کی محنت جو اس نے موجودہ مقام تک پہنچنے کے لئے کی ہے

Answer: D.हा स्तर प्राप्त करण्यासाठी त्याने केलेले परिश्रम
D.The hard-work he has done to achieve the status.
D.اس کی محنت جو اس نے موجودہ مقام تک پہنچنے کے لئے کی ہے

188 शरीराचे तापमान एक सूचक आहे –

The temperature of a body is an indicator of –

ایک جسمانی درجہ حرارت نشاندہی کرتاہے—

A.शरीराच्या रेणूंची एकूण उर्जा
A.The total energy of the molecules of the body
A. جسما نی مولیکیول کے کل توانائی کا

B.शरीराच्या रेणूंच्या सरासरी उर्जा
B.The average energy of
the molecules of the body
B.جسمانی مالیکیول کے اوسط توانائی کا

C.शरीराच्या रेणूंची एकूण गती
C.The total velocity of the
molecules of the body
C.جسما نی مالیکیول کا کل ویلوسیٹی

D.शरीराच्या रेणूंचे सरासरी गतीज ऊर्जा
D.The average kinetic energy
of the molecules of the body
D.جسما نی مالیکیول کا اوسط کینیٹک توانائی

Answer: D.शरीराच्या रेणूंचे सरासरी गतीज ऊर्जा
D.The average kinetic energy
of the molecules of the body
D.جسما نی مالیکیول کا اوسط کینیٹک توانائی

189 शिक्षण हे याचे प्रभावी माध्यम आहे

Education is a powerful instrument of

تعلیم ایک طاقتور ہتھیار ہے کس کا

A.सामाजिक रूपांतरण
A.social transformation
A.سماجی بدلاو

B.व्यक्तिगत रूपांतरण
B.personal transformation
B.ذاتی بدلاو

C.सांस्कृतिक रूपांतरण
C.cultural transformation
C.ثقافتی بدلاو

D.वरीलपैकी सर्व
D.all of the above
D.درج بالا سبھی

Answer: D.वरीलपैकी सर्व
D.all of the above
D.درج بالا سبھی

190	8^{33} चा एकक स्थानचा अंक Unit digit of 8^{33} is 8^{33} کا یونٹ ہندسہ ہے؟
	A.4 A.4 A.4
	B.6 B.6 B.6
	C.8 C.8 C.8
	D.2 D.2 D.2
Answer:	C.8 C.8 C.8
191	खालीलपैकी अशुद्ध वाक्य कोणते ?
	A.गाय चारा खाते.
	B.गायी चारा खातात.
	C.गाय रवंथ करीत आहे.
	D.गायी रवंथ करीत आहे.
Answer:	D.गायी रवंथ करीत आहे.

192 सूचना: खालील माहिती वाचा आणि खालील दिलेल्या प्रश्नांची उत्तरे द्या:
एका क्लबमध्ये आठ सदस्य, A, B, C, D, E, F, G आणि H हे आयताकृती टेबलभोवती बसलेले आहेत. आठपैकी चार जण टेबलच्या कोप-यात बसून बाहेरील बाजूला बघत आहेत, तर इतर चार टेबलच्या बाजूंच्या मध्यभागी बसलेले आहेत आणि टेबलच्या मध्यभागाकडे बघत आहेत.
D हा G च्या उजव्या बाजूला तिसऱ्या क्रमांकावर बसला आहे. E हा C च्या डाव्या बाजूला तिसऱ्या क्रमांकावर बसला आहे. G मध्याभागाकडे बघत आहे. केवळ एक व्यक्ती E आणि F च्या मध्ये बसतो. F हा C च्या तत्काळ शेजारी नाही. H मध्याभागाकडे बघत आहे. A हा F चा तत्काळ शेजारी नाही. C कोपऱ्यांच्या मध्यभागाला बसलेला नाही. A आणि B कर्णरिषेमध्ये एकमेकांच्या अगदी समोरासमोर बसलेले आहेत.
खालीलपैकी कोणा H च्या उजवीकडून तिसऱ्या क्रमांकावर बसतो?

DIRECTIONS: Read the following information and answer the questions given below:
In a club, eight members A, B, C, D, E, F, G and H are sitting around a rectangular table. Out of eight, four sit at corners of a table and face outside, while other four sit in the middle of the sides of the tables and face towards centre of the table.
D sits third to the right of G. E sits third to the left of C. G faces the centre. Only one person sits between E and F. F is not the immediate neighbour of C. H faces the centre. A is not an immediate neighbour of F. C does not sit in the middle of the sides. A and B are sitting diagonally opposite to each other.
Who among the following sits third to right of H?

ہدایات: مندرجہ ذیل معلومات کو پڑھیں اور نیچے دیے گئے سوالوں کے جواب دیں۔
ایک مستطیل میز کے ارد گرد بیٹھے ہوئے ہیں۔ آٹھ میں سے، چار میز کے کناروں H اور A، B، C، D، E، F، G ایک کلب میں آٹھ ممبر پر بیٹھے ہیں اور ان کا رخ باہر کی طرف ہے، جبکہ چار میز کے کناروں کے درمیان میں بیٹھے ہیں اور ان کا رخ میز کے مرکز کی طرف ہے۔
D، G کی F اور E کا رخ مرکز کی طرف ہے۔ G کے بائیں سے تیسرے پر بیٹھا ہے۔ E، C کے دائیں سے تیسرے نمبر پر بیٹھا ہے۔ C کا فوری پڑوسی نہیں ہے۔ A، F کا رخ مرکز کی طرف ہے۔ H کا فوری پڑوسی نہیں ہے۔ F، C درمیان صرف ایک شخص بیٹھا ہے۔
وتری طور پر ایک دوسرے کے مخالف بیٹھے ہوئے ہیں۔ B اور A کناروں کے درمیان نہیں بیٹھا ہوا ہے۔
H کے دائیں طرف سے تیسرے پر بیٹھا ہے؟ مندرجہ ذیل میں سے کون

A.A
A.A
A.A

B.F
B.F
B.F

C.D
C.D
C.D

D.C
D.C
D.C

Answer: A.A
A.A
A.A

193 आपण आपल्या मित्रांच्या स्कूटरच्या ऐवजी सायकल चालविण्यास प्राधान्य का द्याल?

Why would you prefer to ride a bicycle to school rather than your friend’s scooter?

آپ اپنے دوست کے ساتھ اسکی اسکوٹر پر جانے کے بجائے اپنی سائکل سے اسکول جانا پسند کیوں کرتے ہیں

A.आपल्याला सायकलवर व्यायाम मिळेल
A.You get exercise on a bicycle
A. آپ کو سائیکل چلانے پر ورزش کا موقعہ حاصل ہو گا

B.आपण प्रदुषण करणार नाही
B.You will not pollute
B. آپ ماحول کو آلودہ نہیں کرینگے

C.ते स्वस्त आहे
C.It is cheaper
C. یہ سستا ہے

D.वरीलपैकी सर्व
D.All of the above
D. مندرجہ بالا تمام

Answer: D.वरीलपैकी सर्व
D.All of the above
D. مندرجہ بالا تمام

194 मे 1993 च्या कोणत्या तारखांना रविवार होता?

On what dates of May 1993 did Sunday fall?

مئ 1993 کی کن تاریخوں کو اتوار تھا؟

A.1, 8, 15, 22, 29
A.1, 8, 15, 22, 29
A.1،8،15،22،29

B.2, 9, 16, 23, 30
B.2, 9, 16, 23, 30
B.2،9،16،23،30

C.3, 10, 17, 24, 31
C.3, 10, 17, 24, 31
C.3،10،17،24،31

D.4, 11, 18, 25
D.4, 11, 18, 25
D.4،11،18،25

Answer:	B.2, 9, 16, 23, 30 B.2, 9, 16, 23, 30 B.2،9،16،23،30

195	संक्षेप एचटीएमएल म्हणजे ……. . The acronym HTML stands for ……. . --------- مخفف ایچ ٹی ایم ایل علامت ہئے
	A.हाय ट्रान्सफर मशिन लॅग्वेज A.High Transfer Machine Language A.ہائی ٹرانسفر مشین لینگویج کا
	B.हाय ट्रान्समिशन मार्कअप लॅग्वेज B.High Transmission Markup Language B.ہائی ٹرانسمیشن مارک اپ لینگویج کا
	C.हायपरटेक्स्ट मार्कअप लॅग्वेज C.Hypertext Markup Language C.ہائیپر ٹیکسٹ مارک اپ لینگویج کا
	D.हायपरमेडिया मार्कअप लॅग्वेज D.Hypermedia Markup Language D.ہائیپر میڈیا مارک اپ لینگویج کا

Answer:	C.हायपरटेक्स्ट मार्कअप लॅग्वेज C.Hypertext Markup Language C.ہائیپر ٹیکسٹ مارک اپ لینگویج کا

For More Info And Videos About TAIT-Exam Syllabus And Other Exam Visit My Channel
BADSHAHimp SubScribe Like & Share YouTube WWW.YouTube/BADSHAHimp

196 दिलेल्या पर्यायांपैकी कोणता पर्याय दिलेल्या मुख्य आकृतीचे तंतोतंत प्रतिबिंब आहे? (लक्षात घ्या की आरसा मुख्य आकृतीच्या डाव्या बाजूला आहे.)

Which of the following choices is the exact mirror image of the main figure (Please note that the mirror .present on the left side of the main figure.)

نیچےدیئے گئے اختیارات میں سے کونسا انتخاب اصل شکل کی ہوبہو معکوس ہے؟ (برائے کرم نوٹ کریں کہ آئینہ آصل شکل کے بائیں جانب موجود ہے۔)

मुख्य आकृती
Main Figure
اصل شکل

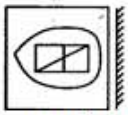

उत्तरासाठी पर्यायी आकृत्या
Answer Figure
جوابی شکل

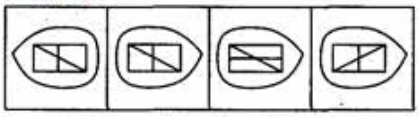

A. (A)

B. (B)

C. (C)

D. (D)

Answer: B. (B)

197 ‘ मित्र ’ या शब्दाचा विरुद्धार्थी शब्द कोणता ?

A.रिपु

B.सखा

C.सोबती

D.दोस्त

Answer: A.रिपु

198 जर रेडीओला कॉम्पॅक्ट डिस्क म्हटले, कॉम्पॅक्ट डिस्कला टेप-रेकॉर्डर म्हटले, टेप रेकॉर्डरला टीव्ही म्हटले, टीव्हीला कूलर म्हटले आणि कूलरला एअर-कंडीशनर म्हटले. तर आपण चित्रपट पाहण्यासाठी काय वापरु शकतो?

If radio is called compact disc, compact disc is called tape-recorder, tape recorder is called television, television is called cooler and cooler is called air-conditioner. We can use for watching movies?

اگر ریڈیو کو کمپیکٹ ڈسک، کومپیکٹ ڈسک کو ٹیپ ریکارڈر، ٹیپ ریکارڈر کو ٹی وی، ٹی وی کو کولر، کولر کو ایر کنڈیشنر کہا جائے تو ہم فلم دیکھنے کے لیے کیا استعمال کرسکتے ہیں؟

A.रेडीओ
A.Radio
A.ریڈیو

B.टीव्ही
B.Television
B.ٹی وی

C.कूलर
C.Cooler
C.کولر

D.कॉम्पॅक्ट डिस्क
D.Compact Disc
D.کمپیکٹ ڈسک

Answer: C.कूलर
C.Cooler
C.کولر

199 निर्देश: दिलेल्या अंक मालिकेतील चुकीची संज्ञा शोधा:

7, 9, 12, 16.5, 24

DIRECTIONS: Find the wrong term in the given number series.

7, 9, 12, 16.5, 24

ہدایت دے گئے نمبرس سرج مے غلط نمبر کھوجے

7, 9, 12, 16.5, 24

A.9
A.9
A.9

For More Info And Videos About TAIT-Exam Syllabus And Other Exam Visit My Channel
BADSHAHimp SubScribe Like & Share YouTube WWW.YouTube/BADSHAHimp

B.12
B.12
B.12

C.16.5
C.16.5
C.16.5

D.24
D.24
D.24

Answer: D.24
D.24
D.24

200 अनुक्रमे 4, 6, 5, 3 व 7 कि.ग्रॅ. वजन असणाऱ्या 5 मुलांचे सरासरी वजन (कि. ग्रॅ.मध्ये) काढा.

Find the average weight (in kg) of 5 children whose weights are 4, 6, 5, 3 and 7 kg.

بچوں کا اوسط وزن نکالئے جنکے وزن 4,6,5,3اور 7 کلوگرام ہے5

A.4
A.4
A.4

B.5
B.5
B.5

C.8
C.8
C.8

D.11
D.11
D.11

Answer: B.5
B.5
B.5

For More Info And Videos About TAIT-Exam Syllabus And Other Exam Visit My Channel
BADSHAHimp SubScribe Like & Share WWW.YouTube/BADSHAHimp

Question Paper Title : TAIT_PAPER_20

Date of Exam : 2017-12-20 16:00:00.0

1 सूचना: दोन विधाने आणि त्यानंतर दोन निष्कर्ष, I आणि II दिले आहेत. ही विधाने सामान्यतः ज्ञात वस्तुस्थितीपेक्षा भिन्न असली तरी सत्य आहेत असे समजा. दिलेल्यापैकी कोणता निष्कर्ष दिलेल्या विधानांवरुन नक्की काढता येऊ शकतो हे तुम्ही ठरवायचे आहे.तुमचे उत्तर सूचित करा.

विधाने:
(a) सर्व विद्यार्थ्यांना फिरायला आवडतं.
(b) काही विद्यार्थ्यांना प्रयोगशाळेतले प्रयोग आवडतात.
निष्कर्ष:
I. प्रयोगशाळेतील प्रयोग आवडणाऱ्या विद्यार्थ्यांना फिरायला देखील आवडतं.
II. काही विद्यार्थ्यांना प्रयोगशाळेतले प्रयोग आवडत नाहीत पण फिरायला आवडतं.

DIRECTION: Two statements are given following by two conclusions, I, and II. You have to consider that statements to be true, even if they seem to be at variance from commonly known facts. You are to decide which of the given conclusions can definitely be drawn from the given statements. Indicate your answer.

Statements:
(a) All students like excursions.
(b) Some students like Laboratory experiments.

Conclusion:
I. Students who like Laboratory experiments also like excursions.
II. Some students do not like Laboratory experiments but likes excursion.

ہدایات: دو سٹیٹمنٹ جوکہ دو خلاصوں پر مشتمل ہیں I، اور II. اگرچہ دکھنے میں وہ بہت سارے ہے، اپ کو وہ سٹیٹمنٹ درست ماننا ہے۔ حقاٰق ست مطبقت رکھتی ہو۔ اپ کو دیے گے خلاصوں میں سے یقینی طور پر اسے اختیار کرنا ہے جو سٹیٹمنٹ سے نکلا ہو. اپنا جواب تلاش کرے.

اظہار بیان:
تمام سیاحت کی طرح ہیں تمام طالبعلم
کچھ طالبعلم لیبارٹی اکسپریمنٹ کی طرح ہیں

نتائج:
I وہ طالبعلم جو لیبارٹی اکسپریمنٹ کی طرح ہیں وہ اکسکرشن کی طرح ہیں۔
II کچھ طالبعلم لیبارٹی اکسکریمنٹ کی طرھ نہین ہیں لیکن وہ سیاحت کی طرح ہیں۔

A.केवळ I निष्कर्ष निघेल
A.Only I follows
A.صرف درست ہے I

For More Info And Videos About TAIT-Exam Syllabus And Other Exam Visit My Channel
TAIT च्या 30 प्रश्नपत्रिका PDF
BADSHAHimp Available Request 9765226781
WWW.YouTube.com/BADSHAHimp
Subscribe My Channel

B.केवळ II निष्कर्ष निघेल
B.Only II follows
B.صرف درست ہے II

C.निष्कर्ष I आणि II निष्कर्ष निघेल
C.Conclusion I and II follow
C.خلاصہ I اور II درست ہے

D.I किंवा II निष्कर्षही निघणार नाही
D.Neither I nor II follow
D.نہ I نہی II درست ہے

Answer: C.निष्कर्ष I आणि II निष्कर्ष निघेल
C.Conclusion I and II follow
C.خلاصہ I اور II درست ہے

2 खालीलपैकी अशुद्ध वाक्य कोणते ?

A.अनावश्यक खर्चाला आळा घातला पाहिजे.

B.आम्ही अंगणात आकाशकंदील टांगत होतो.

C.आम्हा मुलांशी तो लाडू खाऊ घालायचा.

D.लहान मुले आनंदाने बागडत होती.

Answer: C.आम्हा मुलांशी तो लाडू खाऊ घालायचा.

3 4985.23 + 4632.14 –? = 4022.12

4985.23 + 4632.14 –? = 4022.12

4985.23 + 4632.14 –? = 4022.12

A.5955.25
A.5955.25
A.5955.25

B.5595.25
B.5595.25
B.5595.25

C.5295.55
C.5295.55
C.5295.55

For More Info And Videos About TAIT-Exam Syllabus And Other Exam Visit My Channel
TAIT च्या 30 प्रश्नपत्रिका PDF
BADSHAHimp Available Request 9765226781
WWW.YouTube.com/BADSHAHimp
Subscribe My Channel

D.5255.95
D.5255.95
D.5255.95

Answer: B.5595.25
B.5595.25
B.5595.25

4 When our behavior आणि मनोवृत्ती s are प्रभाव d by the real किंवा imagined presence of other is

When our behavior and attitudes are influenced by the real or imagined presence of other is

جب ہمارے رویے یا طرزِ عمل کسی حقیقی شخصیت یا دیگر کسی خیالی وجود سے متاثر ہوتا ہے تو اسے _____ کہتے ہیں۔

A.सामाजिक संस्कृती
A.Social culture
A.سماجی کلچر

B.सामाजिक जाणीव
B.Social awareness
B.سماجی بیداری

C.सामाजिक प्रभाव
C.Social influence
C. سماجی اثرات

D.सामाजिक भिती
D.Social fear
D.سماجی خوف

Answer: C.सामाजिक प्रभाव
C.Social influence
C. سماجی اثرات

5 ओट्यावरची शाळा हि होती

A vestibule school was a—

ایک ویسٹیبیول اسکول تھا—

A.पत्राचार शाळा
A.Correspondence school
A.کوریسپانڈینس اسکول

For More Info And Videos About TAIT-Exam Syllabus And Other Exam Visit My Channel
TAIT च्या 30 प्रश्नपत्रिका PDF
BADSHAHimp Available Request 9765226781
WWW.YouTube.com/BADSHAHimp
Subscribe My Channel

B.सार्वजनिक व्यापार शाळा
B.Public trade school
B.پبلک ٹریڈ اسکول

C.काम शिकवणारी शाळा
C.School of apprentices
C.اپرینٹکس کا اسکول

D.कारखान्या द्वारा चालवलेली शाळा
D.School run by a factory
D.ایک فیکٹری کی طرف سے چلایا جانے والا اسکول

Answer: D.कारखान्या द्वारा चालवलेली शाळा
D.School run by a factory
D.ایک فیکٹری کی طرف سے چلایا جانے والا اسکول

6 सरळ व्याजामध्ये गुंतवणूक केल्यास एक रक्कम 12 वर्षांमध्ये दुप्पट होते. गुंतवणूकीवरील अंदाजे व्याज दर काय आहे?

A sum of money doubles itself in 12 years if invested at simple interest. What is the approximate rate of interest allowed on the investment?

ایک مبلغ رقم جو سود مفرد پر انویسٹ جاتی ہے 12 سال میں خود کا دوگنا ہوجاتی ہے انویسٹمینٹ پر غالبا سود کی کونسی در منظور کی گیی ہے؟

A.9.50%
A.9.50%
A.9.50%

B.8.25%
B.8.25%
B.8.25%

C.8.50%
C.8.50%
C.8.50%

D.8.33%
D.8.33%
D.8.33%

Answer: D.8.33%
D.8.33%
D.8.33%

For More Info And Videos About TAIT-Exam Syllabus And Other Exam Visit My Channel
TAIT च्या 30 प्रश्नपत्रिका PDF
BADSHAHimp Available Request 9765226781
WWW.YouTube.com/BADSHAHimp
Subscribe My Channel

7	निर्देश: खालील मालिकेतील गहाळ संख्या शोधा. 4, 8, 12, 24, 36, 72, ..., DIRECTION: Find the missing number in the following series. 4, 8, 12, 24, 36, 72, ..., ہدایات: جیل کے سرچ مے گمشدہ نمبر کھوجے . 4, 8, 12, 24, 36, 72, ..., A.108 A.108 A.108 B.98 B.98 B.98 C.92 C.92 C.92 D.85 D.85 D.85
Answer:	A.108 A.108 A.108
8	विरोधात्मक असंतोष विकार_____चे एक लक्षण आहे. One symptom of oppositional defiant disorder is مخالفانہ دلیر خرابی (ڈیفائنٹ ڈس آرڈر) کی ایک علامت ہے: A.अतिसक्रियता A.Hyper activity A. انتہائی سرگرمی B.अति खाणे B.Excessive eating B. زیادہ کھانا

C.अवज्ञा
C.Disobedience
C.نافرمانی

D.मित्रत्व
D.Friendliness
D.دوستانہ مزاج

Answer: C.अवज्ञा
C.Disobedience
C.نافرمانی

9 **सूचना:** खालील प्रश्नात, दिलेल्या पर्यायांमधून नातेसंबंध सांगणारी आकृती निवडा.

DIRECTIONS: In the question below, select the related figure from the given alternatives.

ہدایات: نیچے دیئے گئے سوال میں، دیئے گئے متبادلات میں سے متعلق متبادل چنئے۔

Problem Figures:

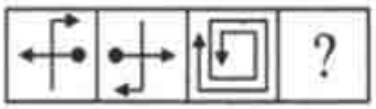

Answer Figures:

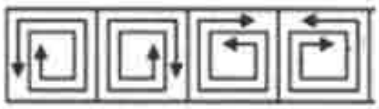

A. 1

B. 2

C. 3

D. 4

Answer: B. 2

For More Info And Videos About TAIT-Exam Syllabus And Other Exam Visit My Channel
TAIT च्या 30 प्रश्नपत्रिका PDF
BADSHAHimp Available Request 9765226781
WWW.YouTube.com/BADSHAHimp
Subscribe My Channel

10

सूचना: दिलेल्या पर्यायांमधून श्रेणी पूर्ण करणारी योग्य आकृती निवडा.

DIRECTIONS: Complete the series by choosing right figure from the given choices.

ہدایات: دیئے گئے اختیارات میں سے صحیح شکل کو چن کر سلسلہ کو مکمل کیجیئے

Problem Figures

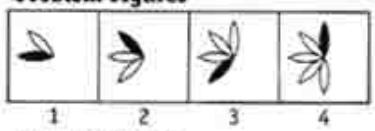

1 2 3 4

Answer Figures

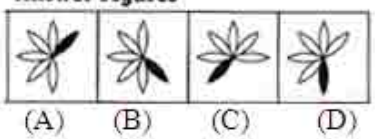

(A) (B) (C) (D)

A. (A)

B. (B)

C. (C)

D. (D)

Answer: D. (D)

11

सुशिल-कुमार हे _____ याच्याशी संबंधित आहेत –

Sushil Kumar is associated with -

سشیل کمار جڑے ہیں :

A.बॉक्सिंग
A.Boxing
A.باکسنگ سے

B.हॉकी
B.Hockey
B.ہاکی سے

C.तिरंदाजी
C.Archery
C.تیر اندازی سے

D.कुस्ती
D.Wrestling
D.کشتی سے

For More Info And Videos About TAIT-Exam Syllabus And Other Exam Visit My Channel
TAIT च्या 30 प्रश्नपत्रिका PDF Available Request 9765226781
BADSHAHimp
WWW.YouTube.com/BADSHAHimp
Subscribe My Channel

Answer: D.कुस्ती
D.Wrestling
D.کشتی سے

12 वडीलांचे वर्तमान वय हे त्यांच्या मुलाच्या वयाच्या तिपट्टीपेक्षा 3 वश जास्त आहे. तीन वर्षांनंतर वडीलांचे वय त्यांच्या मुलाच्या वयापेक्षा 10 वर्षे अधिक असेल. वडीलांचे वर्तमान वय काय आहे (वर्षांमध्ये)?

The present age of the father is 3 years more than thrice the age of his son. Three years later father's age will 10 years more than twice the age of his son. What is the present age of father (In years)?

والد کی موجودہ عمر اُس کے بیٹے کی عمر کے 3 گنا سے 3 سال زیادہ ہے۔3 سال بعد والد کی عمر 10 سال زیادہ ہو گی بیٹے کی دوگنی عمر کے۔والد کی موجودہ عمر(سالوں میں)کیا ہے؟

A.33
A.33
A.33

B.39
B.39
B.39

C.45
C.45
C.45

D.40
D.40
D.40

Answer: A.33
A.33
A.33

13 शैक्षणिक चित्रपटांबद्दल, हे सांगता येते –

Concerning educational films, it can be truthfully said that—

تعلیمی فلموں کے بارے میں، یہ حقیقت میں کہا جا سکتا ہے کہ-

A.असल्या प्रकारच्या चित्रपटा चा स्वरूपाचा ते मुख्यतः व्यावसायिक चित्रपटांपेक्षा वेगळा असतो
A.They differ from commercial films chiefly is the basis of nature of the film
A.وہ تجارتی فلموں سے مختلف ہیں جو بنیادی طور پر فلم کی نوعیت کی بنیاد ہے

For More Info And Videos About TAIT-Exam Syllabus And Other Exam Visit My Channel
TAIT च्या 30 प्रश्नपत्रिका PDF
BADSHAHimp Available Request 9765226781
WWW.YouTube.com/BADSHAHimp
Subscribe My Channel

B.शालेय विद्यार्थ्यां द्वारे बनवले गेलेले चलचित्रे अपयशी ठरले आहे
B.Motion picture production by school children has proved to be a failure
B.اسکول کے بچوں کی طرف سے موشن پکچر کی پروڈکشن ناکام ثابت ہوئی ہے

C.युद्ध घडामोडींनी द्वारे चित्रपटांचा शैक्षणिक उपयोग दशका पासून चालत आहे
C.War developments advanced the educational use of films by decades
C.جنگ کی ترقی نے دہائیوں سے فلموں کے تعلیمی استعمال کو بڑھا دیا

D.हे आवडत असल्यामुळे शैक्षणिक चित्रपटानं वर सुरु पासून जोर दिले गेले आहे
D.The interest factor in educational films was stressed from the start
D.تعلیمی فلموں میں دلچسپی کے عنصر پر شروع سے زور دیا گیا تھا

Answer: C.युद्ध घडामोडींनी द्वारे चित्रपटांचा शैक्षणिक उपयोग दशका पासून चालत आहे
C.War developments advanced the educational use of films by decades
C.جنگ کی ترقی نے دہائیوں سے فلموں کے تعلیمی استعمال کو بڑھا دیا

14 पुढील जोडशब्द पूर्ण करा . 'भाजी ----------'

A.पाला

B.पाव

C.डाळ

D.बाजार

Answer: A.पाला

15 49 मुलांच्या वर्गात नितीनचा अठरावा क्रमांक आहे. तर शेवटून त्याचा किती क्रमांक आहे ?

Nitin ranks eighteenth in a class of 49 students. What is his rank from the last?

نیتن کا 49 طالب علم کی کلاس میں اٹھارواں مقام ہے.آخر سے اسکا مقام کیا ہے؟

A.18
A.18
A.18

B.19
B.19
B.19

C.31
C.31
C.31

D.32
D.32
D.32

Answer: D.32
D.32
D.32

16 वायुची गती मोजण्यासाठी कोणते साधन वापरले जाते?

Which instrument is used to measure speed of wind?

ہوا کی رفتار کی پیمائش کرنے کے لئے کس انسٹرومینٹ کا استعمال کیا جاتا ہے؟

A.अममिटर
A.Ammeter
A.امیٹر

B.अनेमोमिटर
B.Anemometer
B.انیمومیٹر

C.इलेक्ट्रोमिटर
C.Elactrometer
C.الیکٹرومیٹر

D.विड वाने
D.Wind wane
D.وائنڈ وین

Answer: B.अनेमोमिटर
B.Anemometer
B.انیمومیٹر

17 Out of the given options, choose the one which is the correct active voice of the sentence given below.
A cup of coffee was brought to me by her.

A.She is bringing me the cup of coffee.

B.She bring me a cup of coffee.

C.She brought me a cup of coffee.

D.She was bringing me the cup of coffee.

Answer: C.She brought me a cup of coffee.

18 Out of the given options, choose the one which is the correct indirect speech of the sentence given below.
The teacher said to me, “you answered correctly”

A.The teacher says to me that I answered correctly.

B.The teacher said to me that I have answer correctly.

C.The teacher said to me that I had answered correctly.

D.The teacher says to me that I was answering correctly.

Answer: C.The teacher said to me that I had answered correctly.

19 सूचना: खालील प्रश्नांमध्ये दिलेल्या पर्यायांमधून संबंधित अक्षर/शब्द/संख्या निवडा.

हृदय : हृदयरोगतज्ञ ::

DIRECTIONS: In the following question, select the related letter/word/number from the given alternatives.

Heart : Cardiologist ::

سمت: مندرجہ ذیل سوال میں، دیے گئے متبادل سے متعلقہ حرف/لفظ/نمبر منتخب کریں۔

دل : دل کا ڈاکٹر ::

A.मेंदू : मानसशास्त्र
A.Brain : Psychology
A.دماغ : نفسیات

B.इतिहास : इतिहासलेखन
B.History : Historiography
B.تاریخ : تاریخ نویسی

C.नागरिकशास्त्र : राज्यतंत्र
C.Civics : Polity
C.علم شہریت : طرز حکومت

D.मूत्रपिंड:मूत्रविकारतज्ञ
D.Kidney:Nephrologist
D.گردہ:ماہر امراض گردہ

Answer: D.मूत्रपिंड:मूत्रविकारतज्ञ
D.Kidney:Nephrologist
D.گردہ:ماہر امراض گردہ

20 $1\frac{1}{2}$ मध्ये मिळवल्यास, $1\frac{1}{2}$ ने गुणल्याएवढेच उत्तर देणारी संख्या?

The number which gives the same result when added to $1\frac{1}{2}$ and when multiplied by $1\frac{1}{2}$

عدد جسے $1\frac{1}{2}$ میں جمع کیا جائے یا $1\frac{1}{2}$ کے ساتھ ضرب کیا جائے تو یکساں نتیجہ دے۔

A. 1/5

B. 3

C. 5

D. 7

Answer: B. 3

21 **सूचना:** दिलेल्या चारांपैकी वेगळी (असंबद्ध) असणारी आकृती शोधून काढा.

DIRECTIONS: From the odd from the given four figures.

ہدایات: دیئے گئے چار شکلوں میں سے طاق شکل کونسی ہے؟

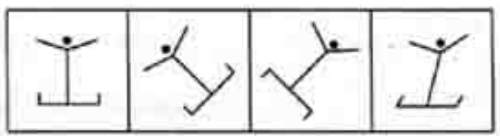

(A) (B) (C) (D)

A. (A)

B. (B)

C. (C)

D. (D)

Answer: C. (C)

22 खालीलपैकी अशुद्ध शब्द कोणता ?

A.डावलणे

B.डावपेच

C.डोइफोड

D.डोकावणे

Answer: C.डोइफोड

23 सूचना: खालील माहिती काळजीपूर्वक वाचा आणि खाली दिलेल्या प्रश्नांची उत्तरे द्या.
A, B, C, D, E, F, G आणि H हे आठ मित्र एका गोलाकार टेबलभोवती मध्याभागाकडे बघत बसलेले आहेत. A हा D च्या डावीकडून दुसऱ्या जागेवर बसला आहे, जो E च्या डाव्या बाजूला तिसरा आहे. C हा G च्या उजवीकडील तिसऱ्या जागेवर बसला आहे, जो की E चा तत्काळ शेजारी नाही. H हा B च्या उजवीकडील तिसऱ्या जागेवर बसला आहे, जो G च्या उजवीकडे दुस-या जागेवर आहे.
खालील पाचपैकी चार त्यांच्या बसण्याच्या व्यवस्थेवर आधारित सारखे आहेत आणि म्हणून एक गट तयार करतात. खालीलपैकी काय त्या गटात बसत नाही?

DIRECTIONS: Read the following information carefully and answer the questions that given below.
A, B, C, D, E, F, G and H are eight friends sitting around a circular table facing the centre. A sits second to the left of D, who is third to the left of E. C sits third to the right of G, who is not an immediate neighbour of E. H sits third to the right of B, who sits second to the right of G.
Four of the following five are alike based upon their seating arrangements and so form a group. Which is the one that does not belong to that group?

ہدایات: مندرجہ ذیل معلومات کو دھیان سے پڑھیں اور نیچے دیے گئے سوالوں کے جواب دیں۔
A، B، C، D، E، F، G اور H آٹھ دوست ہیں جو مرکز کا رخ کیے ہوئے ایک گول میز کے ارد گرد بیٹھے ہیں۔ A، D کے بائیں سے H، B کا فوری پڑوسی نہیں ہے۔ E کے دائیں سے تیسرے پر بیٹھا ہے، جو C، G کے بائیں سے تیسرا ہے۔ E دوسرے پر بیٹھا ہے، جو G کے دائیں سے دوسری جگہ پر بیٹھا ہے۔ G کے دائیں طرف تیسرے نمبر پر بیٹھا ہے، جو
اپنے بیٹھنے کے انتظام کی بنیاد پر مندرجہ ذیل پانچ میں سے چار ایک جیسے ہیں اور اس طرح ایک گروپ کی تشکیل کرتے ہیں۔ وہ کون ہے جس کا تعلق اس گروپ سے نہیں ہے؟

A.CH
A.CH
A.CH

B.FG
B.FG
B.FG

C.DG
C.DG
C.DG

D.BE
D.BE
D.BE

Answer: C.DG
C.DG
C.DG

24 $$\frac{5 \times 5 + 4 \times 4 + 2 \times 5 \times 4}{5 \times 5 - 4 \times 4} = ?$$

A. 6

B. 7

C. 11

D. 9

Answer: D. 9

25 Out of the given four words only one is not spelt correctly. Find the word that is not correctly spelt.

A.Curiousity

B.Opportunity

C.Opposition

D.Obstacle

Answer: A.Curiousity

26 भारताचे राष्ट्रीय फूल कोणते आहे?

What is the National flower of India?

بھارت کا قومی پھول کونسا ہے :

A.गुलाब
A.Rose
A.گلاب کا

B.कमळ
B.Lotus
B.کمل کا

C.सूर्यफूल
C.Sunflower
C.سورج مکھی کا

D.ट्यूलिप
D.Tulip
D.ٹُلِپ کا

Answer:

B.कमळ
B.Lotus
B.کمل کا

27

निर्देश: खाली दिलेले प्रश्न वर्ण मालिकेवर आधारित आहेत. या प्रत्येक मालिकेत, काही अक्षरे गहाळ आहेत. योग्य पर्याय निवडा पाच पेक्षा अधिक अक्षरे गहाळ असल्यास, मालिकेतील शेवटचे पाच अक्षरे निवडा .

- - rst - q - sup - - uup - - - -

DIRECTION: Questions given below are based on the letter series. In each of these series, some letters are missing. Select the correct alternative. If more than five letters are missing, select the last five letters of the series:

- - rst - q - sup - - uup - - - -

ہدایت نیچے دے ہے سوالات حرف سرج پر مشتمل ہیں . ہر میں کہیں حرف گمشدہ ہے . سہی اختیارات کو چنے . اگر پچ حرف گنمام ہو تو آخری پانچ حرفونکو چنے

- - rst - q - sup - - uup - - - -

A.pquuu
A.pquuu
A.pquuu

B.pqrst
B.pqrst
B.pqrst

C.pqruu
C.pqruu
C.pqruu

D.pqrsu
D.pqrsu
D.pqrsu

Answer: A.pquuu
A.pquuu
A.pquuu

28 पोल तारा कोणत्या नक्षत्रामध्ये रहातो?

In which constellation does the pole star lie?

تاروں کے کس جھرمٹ میں پول تارہ رہتا ہے؟

A.उर्स मेजर
A.Ursa major
A.اورسا میجر

B.उर्स मायनर
B.Ursa minor
B.اورسا مائنر

C.स्कॉर्पिओस
C.Scorpius
C.اسکورپئس

D.ओरऑन
D.Orion
D.اورین

Answer: B.उर्स मायनर
B.Ursa minor
B.اورسا مائنر

29 एक सशक्त कार्यरत लोकशाही समाज अवलंबून आहे

A smooth working democratic society depends upon---

ایک ہموار جمہوری معاشرہ منحصر ہے---

A.व्यापक सामान्य रूची आणि त्याच्या नागरिकांमध्ये सामान्य वागणूक
A.Widespread common interests and common attitudes among its citizens
A.شہریوں کے درمیان عام مفادات اور عام رویے وسیع پیمانے پر پھیلائیں

B.नागरिकांना मध्ये आर्थिक संसाधनांचे एक समान वितरण
B.An equal distribution of economic resources among the body of citizens
B.شہریوں کے اجسام میں معاشی وسائل کی ایک برابر تقسیم

C.अनधिकृत आर्थिक स्पर्धा
C.Unlicensed economic competition
C.غیر لائسنس یافتہ اقتصادی مقابلہ

D.अत्यंत निवडक शाळा प्रणाली
D.A highly selective school system
D.اسکول کا ایک انتہائی منتخبانہ نظام

Answer: A.व्यापक सामान्य रूची आणि त्याच्या नागरिकांमध्ये सामान्य वागणूक
A.Widespread common interests and common attitudes among its citizens
A.شہریوں کے درمیان عام مفادات اور عام رویے وسیع پیمانے پر پھیلائیں

30 DIRECTIONS: A sentence with an underlined phrasal verb is given below. Out of the four options, choose the one which can be substituted for the given phrasal Verb.
All the students chipped in and bought a set of books for the newly admitted child.

A.stole away

B.contributed

C.took away

D.ran away

Answer: B.contributed

31 ' कपाळ फुटणे ' या वाक्प्रचाराचा अर्थ काय ?

A.उपद्रव होणे

B.मरण पावणे

C.दैवात असणे

D.दुर्दैव ओढवणे

Answer: D.दुर्दैव ओढवणे

32 A, B, C, आणि D नावाच्या चार आकृत्या दिल्या आहेत, त्यापैकी प्रश्नचिन्हाची (?) जागा घेणारी योग्य आकृती शोधून काढा.

Choose an appropriate figure from the five numbered figures to replace the questions mark (?).

نشان لگی پانچ شکلوں میں سے، مناسب شکل کا انتخاب کرے اسے سوالی نشان کی جگہ رکھنے کے لئے

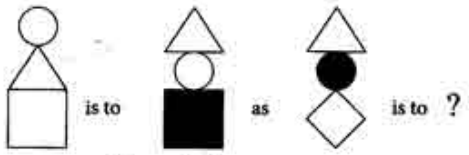

उत्तरासाठी पर्यायी आकृत्या

Answer Figure

جوابی شکل

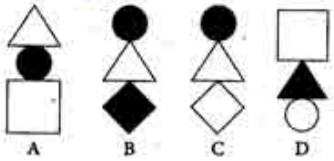

A. (A)

B. (B)

C. (C)

D. (D)

Answer: B. (B)

33 जर अतुल, रांगेत उजवीकडून बाराव्या आणि डावीकडून चौथ्या स्थानावर असेल तर, 28 मुलांची रांग होण्यासाठी किती मुले सामील करावी लागतील?

If Atul finds that he is twelfth from the right and fourth from the left, how many boys should be added to the queue so that there are 28 boys in the line?

اگر اطل نے دیکھا کہ وو دھانیں سے باروہ اور بھانیں سے چوتھا ہے، کتنے بچھے جمہ کرنے ہے تاکہ کتار میں 28 بچھے رہے؟

A.12
A.12
A.12

B.13
B.13
B.13

C.14
C.14
C.14

D.20
D.20
D.20

Answer: B.13
B.13
B.13

34 सूचना: या प्रत्येक प्रश्नांमध्ये तुम्हाला A आणि B अशी दोन विधाने दिलेली आहे आणि I आणि IIअसे दोन निष्कर्ष दिलेले आहेत. सामान्यपणे माहीत असलेल्या तथ्यांशी जुळत नसले तरी खालील दोन विधाने बरोबर आहेत असे समजा. खालीलपैकी कोणते निष्कर्ष दिलेल्या वाक्यांना संपूर्णपणे लागू आहे ते ठरवा.
निवेदन:
A: काही पुस्तके कार आहेत.
B: काही कार बॉक्स आहेत.
निष्कर्ष:
I: काही पुस्तके बॉक्स आहेत.
II: काही बॉक्स पुस्तके आहेत.

DIRECTION: In each of these questions, you are given two statements A and B followed by two conclusions (I) and (II). You have to take the two statements to be true even if they seem to be at variance from commonly known facts. You are to decide which of the given conclusions definitely follows from the given statements.

Statements:
A: Some books are cars.
B: Some cars are boxes.

Conclusions:
I: Some books are boxes.
II: Some boxes are books.

ہدایت:ان سوالوں میں سے ہر ایک میں، آپ کو دو بیانات A اور B دیے گئے ہیں جن کے بعد دو نتائج (I) اور (II) دیے گئے ہیں۔ آپ کو دونوں بیانات کو درست تسلیم کرنا ہے اگرچہ وہ عام طور پر معلوم حقائق کے برعکس نظر آتے ہوں۔ آپ کو فیصلہ کرنا ہے کہ دیے گئے نتائج میں سے کون یقینی طور پر دیے گئے بیانات کی پیروی کرتا ہے۔

بیانات:
A: کچھ کتابیں کار ہیں۔
B: کچھ کار باکس ہیں۔

حل:
I: کچھ کتابیں باکس ہیں۔
II. کچھ باکس کتابیں ہیں۔

A.जर केवळ निष्कर्ष I निघत असल्यास.
A.If only conclusion I follows
A.صرف نتیجہ I پیروی کرتا ہے۔

B.जर केवळ निष्कर्ष II निघत असल्यास.
B.If only conclusion II follows
B.صرف نتیجہ II پیروی کرتا ہے۔

C.जर दोन्ही निष्कर्ष I आणि II निघत असल्यास.
C.If both I and II follow
C.دونوں I اور II پیروی کرتے ہیں۔

D.जर दोन्ही निष्कर्ष I आणि II निघत नसल्यास.
D.If neither I nor II follows
D.نہ تو I نہ ہی II پیروی کرتا ہے۔

Answer: D.जर दोन्ही निष्कर्ष I आणि II निघत नसल्यास.
D.If neither I nor II follows
D.نہ تو I نہ ہی II پیروی کرتا ہے۔

35 आपल्या डोक्यामध्ये हलणारे एकच हाड आहे

Only movable bone in our head is

ہمارے سر میں قابل حرکت ہڈی ہے

A.कवटी
A.Skull
A.کھوپڑی

B.कपाळाचे हाड
B.Cranium
B.کرینئم

C.जबडा
C.Jawbone
C.جبڑے کی ہڈی

D.गळ्याचे हाड
D.Collarbone
D.ہنسلی

Answer: C.जबडा
C.Jawbone
C.جبڑے کی ہڈی

36 शिक्षकांनी विद्यार्थ्यांना सामाजिक बनविण्यासाठी पुढाकार घेण्यासाठी हे केले पाहिजे

The teachers should lead the students to become community-minded by—

اساتذہ کو طلباء کی قیادت کرنا چاہئے کہ وہ کمیونٹی مائنڈڈ بنیں

A.वर्ग-चेतना वाढवणे
A.Cultivating class-consciousness
A.کلاس شعور کی تیاری

B.अनुभवांच्या सहानुभूती वाटपांना प्रोत्साहन देणे
B.Encouraging sympathetic sharing of experiences
B.تجربات کے ہمدردانہ اشتراک کرنے کی حوصلہ افزائی

C.'जगा आणि जगू द्या ' ह्या भावनेला वाव दिले पाहिजे
C.Spreading spirit of live and let live’
C.زندہ رہنے اور اپنے دینے کے جذبہ کو پھیلانا

D.समूहातील मतभेदांवर लक्ष केंद्रित करणे
D.Focussing attention upon the differences in groups
D.گروپوں میں اختلافات پر توجہ مرکوز

Answer: B.अनुभवांच्या सहानुभूती वाटपांना प्रोत्साहन देणे
B.Encouraging sympathetic sharing of experiences
B.تجربات کے ہمدردانہ اشتراک کرنے کی حوصلہ افزائی

37 खालीलपैकी शुद्ध वाक्य कोणते ?

A.माझ्या हातातून अक्षम्य असा अपराध घडला आहे.

B.माझ्या हातून अक्षम्य असा अपराध घडला आहे.

C.माझ्या हातामधून अक्षम्य असा अपराध घडला आहे.

D.माझ्या हातून अक्षम्य असा अपराध घडला आहेत.

Answer: B.माझ्या हातून अक्षम्य असा अपराध घडला आहे.

38 **सूचना:** खालील प्रश्नात उत्तरातील पर्यायांपैकी कोणत्या पर्यायी आकृतीत प्रश्नातील आकृती अंतर्भूत आहे?

DIRECTIONS: In the given question find the answer figure in which question figure is embedded.

ہدایات: دیئے گئے سوال میں، جواب کی شکل کو دریافت کیجیئے جو سوال میں سرایت کر گئی ہے۔

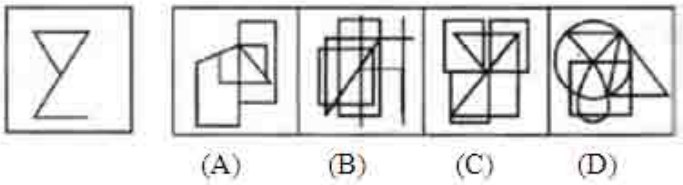

(a) (a)
(b) (b)
(c) (c)
(d) (d)

A. (A)

B. (B)

C. (C)

D. (D)

Answer: C. (C)

39 सूचना: अर्थपूर्ण परिच्छेद निर्माण करण्यासाठी, खाली दिलेली (P), (Q) (R), (S) आणि (T) ही पाच वाक्ये योग्य अनुक्रमाने पुनर्रचना करा; त्यांनतर खालील प्रश्नांची उत्तर द्या.

P. चतुर कोल्ह्याने प्रत्युत्तर दिले, " मोठा दुष्काळ पडणार आहे आणि माझ्याकडे पाणी असल्याची खात्री करून घेण्यासाठी मी येथे आलो आहे."
Q. एकदा जंगलात एकटाच चालताना एक दुर्दैवी कोल्हा एका विहिरीत पडतो.
R. कोल्ह्याने शेळीवर सहजपणे उडी मारली आणि तिच्या शिंगांचा उपयोग करून तो वर पोहचला, शेळी विहिरीतच राहिली.
S. शेळी भोळेपणाने विश्वास ठेवते आणि विहिरीत उडी मारते.
T. जवळून जाणारी शेळी कोल्ह्याला पहाटे आणि तो विहिरीत काय करतो ते विचारते.

पुनर्रचना केल्यानंतर खालीलपैकी कोणते वाक्य चौथे असेल?

DIRECTION: Rearrange the following five sentences (P), (Q), (R), (S) and (T) in the proper sequence to form a meaningful paragraph; then answer the questions given below them.
P. The cunning fox responds, “there is going to be a great drought, and I am here to make sure I have water.”
Q. Walking alone in the forest, an unlucky fox falls into a well one day.
R. The fox swiftly jumps on the goat and uses its horns to reach the top, leaving the goat in the well.
S. The gullible goat believes this and jumps into the well.
T. A passing goat sees the fox and asks him why he is in the well.

Which of the following should be the FOURTH sentence after rearrangement?

ہدایات: ان پانچ جملوں (P)، (Q)، (R)، (S) اور (T) کو با معنی پیرا بنانے کے لئے دوبارہ ترتیب دیجئے، پھر نیچے دے گئے سوالوں کے جواب دیجئے

P. لالچی لومڑی نے جواب دیا، " ایک بہت بدی قحط سالی آنے والی ہے، اور میں یہاں اسلئے ہوں کہ میرے پاس پانی ہے.
Q. جنگل میں اکیلے چلتے ہوئے، ایک بدکسمت لومڑی کونوے میں گر گیا.
R. لومڑی آرام سے بکری کے اپر چڑ گیا اور اپر آنے تک اسکے سینگ کہ استعمال کیا، بکری کو کنوے میں ہی چھوڑ دیا.
S. احمق بکری نے اس پر یکین کیا اور پانی میں کود گیی.
T. ایک گزرتی ہوئی بکری نے لومڑی کو دیکھا اور پوچھا کہ وو پانی میں کیوں ہے.

دوبارہ ترییب دینے کے بعد کون سا جملہ چوتھا ہونا چاہیے؟

A.S
A.S
A.S

B.T
B.T
B.T

C.P
C.P
C.P

D.R
D.R
D.R

Answer: A.S
A.S
A.S

40 12 जानेवारी 2012 ते 30 जून 2012 मधील दिवसांची संख्या मोजा

Calculate the number of days between 12 Jan 2012 to 30 June 2012?

12؟جنوری 2012 سے 30 جون 2012 کے درمیان دنوں کی تعداد شمار کریں

A.170 दिवस
A.170 Days
A.170دن

B.171 दिवस
B.171 Days
B.171دن

C.172 दिवस
C.172 Days
C.172دن

D.173 दिवस
D.173 Days
D.173دن

Answer: B.171 दिवस
B.171 Days
B.171دن

41 A, B आणि C हे एक काम अनुक्रमे 6, 8 आणि 12 दिवसांत पूर्ण करता. तेच काम एकत्रितपणे करून त्यांना रु. 5100 मिळतात, त्या रकमेमध्ये B चा वाटा काय असेल?

A, B and C can do a piece of work in 6, 8 and 12 days respectively. Doing that work together they get an amount of Rs.5100, what is the share of B in that amount?

تین شخص A،B،C کسی کم کو ۶،۸،۱۲ دن بلترتیب میں کرتے ہیں۔ ساتھ ملکر کم کرنے مے انکو 5100 سو روپے ملتے ہیں اس مے سے B کو ملنے والی رقم کتنی ہوگی ؟

A.रु. 1700
A.Rs.1700

B.रु. 1800
B.Rs.1800

C.रु. 1400
C.Rs.1400

D.रु. 2400
D.Rs.2400

Answer: A.रु. 1700
A.Rs.1700

42 एक घड्याळ अशा तऱ्हेने ठेवले आहे की जेव्हा 12 वाजतात तेव्हा त्याचे काटे ईशान्य दिशेकडे निर्देश करतात. सायं. 6 वाजता तास काटा कोणत्या दिशेस निर्देश करेल?

A clock is placed in such a way that when it is 12'O clock, the hands point towards North east direction. In which direction will the hour hand point at 6 PM?

ایک گھڑی کو اس طرح سے رکھا گیا ہے کہ جب 12 بجتے ہیں، تو منٹ کا کانٹا شمال مشرق کی طرف اشارہ کرتا ہے- تو شام کے 6 بجے گھنٹے کا کانٹا کس سمت میں ہوگا؟

A.पश्चिम
A.West
A.مغرب

B.पूर्व
B.East
B.مشرق

C.दक्षिण
C.South
C.جنوب

D.दक्षिण पश्चिम
D.South-west
D.جنوبی مغرب

Answer: D.दक्षिण पश्चिम
D.South-west
D.جنوبی مغرب

43 A sentence with an underlined idiomatic expression is given. What is the meaning of the idiomatic expression 'be in seventh heaven' in the sentence given below?
Since they got married, they've been <u>in seventh heaven.</u>

A.To be extremely happy

B.To be sad and dejected

C.To be gloomy and depressed

D.None of the above

Answer: A.To be extremely happy

44 सूचना: प्रत्येक प्रश्नाला एक प्रमुख विधानासोबत चार विधाने आहेत ज्यांच्याखाली A, B, C आणि D असे चार विधान आहेत. क्रमवार विधानांची जोडी निवडा ज्यामध्ये प्रथम विधान दुसऱ्या विधानाला सुचवते, आणि दोन्ही विधाने तर्किकदृष्ट्या प्रमुख विधानासोबत निगडित असेल.

प्रदूषण वाढल्यास, घातक परिणाम होतील.
A. प्रदूषण वाढले
B. प्रदूषण वाढले नाही
C. घातक परिणाम झाले
D. घातक परिणाम झाले नाही

DIRECTIONS: Each question has a main statement followed by four statements labelled A, B, C and D. Choose the ordered pair of statements, where the first statement implies the second, and the two statements are logically consistent with the main statement.

If pollution increases , there will be hazardous effects
A. pollution increased
B. pollution did not increase
C. there were hazardous effects
D. there were no hazardous effects

ہدایت: ہر سوال میں ایک جملہ ہے جسکے بعد چار جملےاے، بی،سی اور ڈی کے نام سے دئے گئے ہیں اسمیں منسلک جوڑیوں کو چنئے۔ جہاں پہلا جملہ دوسرے جملہ کی اور اشارہ کر رہا ہے اور دو جملے منطقی مرکزی بیان کے مطابق ہیں

اگر آبادی بڑھی تو اس کے اثرات خطرناک ہوں گے۔
Aآبادی بڑھ گئی ۔
Bآبادی نہیں بڑھی ۔
Cاثرات خطرناک تھے ۔
Dاثرات خطرناک نہیں تھے ۔

A.AC
A.AC
A.AC

B.BC
B.BC
B.BC

C.DA
C.DA
C.DA

D.CD
D.CD
D.CD

Answer: A.AC
A.AC
A.AC

45 ‘कोडगा’ या शब्दाचा समानार्थी शब्द कोणता ?

A.लाजरा

B.संकोची

C.आज्ञाकारी

D.निर्लज्ज

Answer: D.निर्लज्ज

46 निर्देश: मालिका पूर्ण करा

AM, ?, DR, GV

DIRECTION: Complete the series

AM, ?, DR, GV

ہدایت اس سرج کو مکمّل کرو

AM, ?, DR, GV

A.BP
A.BP
A.BP

B.BN
B.BN
B.BN

C.BO
C.BO
C.BO

D.BQ
D.BQ
D.BQ

Answer: C.BO
C.BO
C.BO

47 खालीलपैकी कोणता पक्षी गवताला विणून त्याचे घरटे तयार करतो?

Which of the following bird make its nest by weaving the grass?

مندرجہ ذیل پرندوں میں سے کون سا پرندہ گھاس کی بُنائی سے اپنا گھونسلا بناتا ہے؟

A.घुबड
A.Owl
A.اُلّو

B.कावळा
B.Crow
B.کوّا

C.सुगरण
C.Weaver bird
C.ویور پرندہ

D.सुतारपक्षी
D.Woodpecker
D.ہدہد

Answer: C.सुगरण
C.Weaver bird
C.ویور پرندہ

48 Out of the given options which best expresses the meaning of the given Proverb?
Where there’s a will, there’s a way.

A.If you are determined enough, you can find a way to achieve what you want, even if it is very difficult

B.You can achieve success in life only if your ancestors have left a will for you

C.A will of a million dollar will make all your difficulties easier and life happier

D.A smooth road is always ideal for long distance travelling

Answer: A.If you are determined enough, you can find a way to achieve what you want, even if it is very difficult

49 शीना 6 वर्षांची आहे आणि तिच्या वयोगटात तिची कामगिरी चांगली आहे ती अशी आहे असे म्हणतात

Sheena is 6 years in age and fares well in her age group. She is said to be

شینا کی عمر 6 سال ہے اور اپنی عمر کے گروپ میں بھی گھبراتی ہے۔ اسے کیا کہا جائے گا

A.बुद्धिमान
A.intelligent
A.ذہین

B.मंद किंवा मूर्ख
B.dull or idiot
B.کند ذہن یا بیوقوف

C.प्रतिभासंपन्न
C.gifted
C. گفٹیڈ

D.वरीलपैकी कोणतेही नाही
D.none of the above
D. درج بالا میں سے کوئی نہیں

Answer: A.बुद्धिमान
A.intelligent
A.ذہین

50 करिअर कोर्सचा उद्देश

A career course should be aimed at—

ایک کیریئر کورس کا مقصد ہونا چاہئے-

A.प्रत्येक विद्यार्थ्याकडून वास्तववादी आत्म-मूल्यांकन करून घेणे
A.Obtaining from every student a realistic self-appraisal
A.ہر طالب علم سے ایک حقیقت پسندانہ خود کی تشخیص

B.प्रत्येक विद्यार्थ्याकडून आपल्या जीवनाचे काम करण्याचा पर्याय जाणून घेणे
B.Securing from every student a choice of his life's work
B.ہر طالب علم سے اس کی زندگی کے کام کا انتخاب

C.हुशारी ने नोकरीची निवड करण्याच्या क्षमतेचा विकास करणे
C.Developing the ability to make intelligent choice of jobs
C.ملازمتوں کا ذہین انتخاب کرنے کی صلاحیت تیار کرنا

D.उत्तरे 'ए' आणि 'सी'
D.Answers 'A' and 'C'
D.جوابات 'A' اور 'C'

Answer: C.हुशारी ने नोकरीची निवड करण्याच्या क्षमतेचा विकास करणे
C.Developing the ability to make intelligent choice of jobs
C.ملازمتوں کا ذہین انتخاب کرنے کی صلاحیت تیار کرنا

51 **सूचना**: खालील प्रश्नात एकाच फाशाच्या चार अवस्था दाखविल्या आहेत. प्रश्नात विचारलेल्या चिन्हाच्या विरुद्ध बाजूला कोणते चिन्ह असेल?

DIRECTIONS: In the following questions four positions of the same dice are shown. Select the symbol opposite to the symbol as asked in the question.

ہدایات: نیچے کے سوالوں میں، ایک ہی پاسہ کی چار حالتیں دکھائی گئی ہیں اس علامت کو چنئے جو سوال میں پوچھی گئی علامت کے سامنے ہے۔

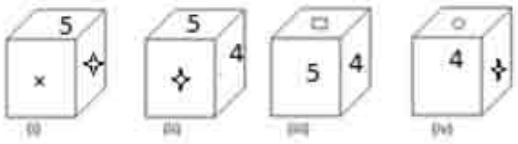

5 या चिन्हाच्या विरुद्ध बाजूला कोणते चिन्ह असेल?
Which symbol will be opposite to symbol 5?
5 کونسا نشان نشان کی ضد ہوگی؟

A. o

B. =

C. ×

D. Δ

Answer: A. o

52	**सूचना**: खालील आकृतीचे प्रतिबिंब शोधून काढा. **DIRECTIONS**: Find the mirror image of the figure given below. ہدایات: نیچے دیئے گئے شکل کی آئینہ معکوس شکل کیا ہوگی۔ Question Figure:  Answer Figures:  (1) (2) (3) (4)
	A. 1
	B. (2
	C. 3
	D. 4
Answer:	A. 1

53	‘ गायन ’ या शब्दाची संधी सोडवा.
	A.ग + अयन
	B.गा + यन
	C.गाय + अन
	D.गै + अन
Answer:	D.गै + अन

54	सरळ रूप द्या: 58654213 – 2138642 = ? Simplify: 58654213 – 2138642 = ? سادہ بنائیں: 58654213 – 2138642

A.56515571
A.56515571
A.56515571

B.56525571
B.56525571
B.56525571

C.56514571
C.56514571
C.56514571

D.56515561
D.56515561
D.56515561

Answer:
A.56515571
A.56515571
A.56515571

55 D ला एक बहीण A आहे, जी P ची आई आहे. D ही P ची मुलगी आहे. B ही P ची आई आहे. मग A चे B सोबत नाते काय?

D has a sister A, whose mother is P. D is the daughter of P. B is P's mother. How is A related to B?

D کی بہن ہے A، جسکی ماں P ہے. P D کی بیٹی ہے. P B کی ماں ہے. A کا B سے کیا رشتہ ہے؟

A.मुलगी
A.Daughter
A.بیٹی

B.बहीण
B.Sister
B.بہن

C.नात
C.Granddaughter
C.دادی

D.चुलत बहीण
D.Cousin
D.چچا زاد

Answer: C.नात
C.Granddaughter
C.دادی

56 भूकंपासाठी वापरले जाणारे इतर शब्द?

Other terms which can be used for earthquake?

دیگر اصطلاحات جن کا استعمال زلزلہ کے لئے کیا جا سکتا ہے؟

A.क्वेक
A.Quake
A.کویک

B.टेब्लोर
B.Temblor
B.ٹریمبلر

C.ट्रेमर
C.Tremor
C.ٹریمر

D.वरीलपैकी सर्व
D.All of above
D.ان میں سے سبھی

Answer: D.वरीलपैकी सर्व
D.All of above
D.ان میں سے سبھی

57 चांगल्याप्रकारे पिसलेल्या कार्ड्सच्या पॅकमधून एक कार्ड काढण्यात आले, तर ते काढलेले कार्ड मानाचे असण्याची शक्यता काढा.

If a card is drawn from a well shuffled pack of cards, find the probability that the card drawn is an honour

اگر ایک کارڈ کو اچھی طرح پلائے گئے پیکٹ سے نکالا جاتا ہے ، تو امکان پر تلاش کریں کہ کارڈ ہانر

A.4/13
A.4/13
A.4/13

B.10/13
B.10/13
B.10/13

C.1/13
C.1/13
C.1/13

D.12/13
D.12/13
D.12/13

Answer: A.4/13
A.4/13
A.4/13

58 नायगारा धबधबा हा _____ येथे आहे

The Niagara Falls is in –

نیاگرہ جھرنا ہے :

A.युएसए
A.USA
A.یو ایس اے میں

B.कॅनडा
B.Canada
B. کیناڈا میں

C.मेक्सिको
C.Mexico
C.میکسیکو میں

D.यांपैकी कोणतेही नाही
D.None of these
D.انمیں سے کوئی نہیں

Answer: B.कॅनडा
B.Canada
B. کیناڈا میں

59 6 मार्च 1949 रोजी बुधवार होता. 7 मार्च 1952 रोजी आठवड्याचा कोणता वार असेल?

It was Wednesday on 6th March 1949. What was the day of week on 7th March 1952?

6 مارچ 1949 کو بدھ تھا۔ 7 مارچ 1952 کو ہفتہ کا کونسا دن تھا؟

A.रविवार
A.Sunday
A.اتوار

B.सोमवार
B.Monday
B.پیر

C.मंगळवार
C.Tuesday
C.منگل

D.बुधवार
D.Wednesday
D.بدھ

Answer: B.सोमवार
B.Monday
B.پیر

60 संविधानामध्ये किती प्रकारच्या आणीबाणींच्या कल्पना केल्या जातात?

How many types of emergency have been visualized in Constitution?

ہنگامی حالات کی کتنی قسمیں آئین میں ہیں؟

A.तीन
A.Three
A.تین

B.एक
B.One
B.ایک

C.चार
C.Four
C.چار

D.दोन
D.Two
D.دو

Answer: A.तीन
A.Three
A.تین

61 "पिंजर" या पुस्तकाचे लेखक कोण आहेत?

Who is the author of the book “Pinjar”?

کتاب ’’پنجر‘‘ کی مصنف ہیں :

A.अनिता देसाई
A.Anita Desai
A.انیتا دیسائی

B.अमृता प्रितम
B.Amrita Pritam
B.امریتا پریتم

C.शोभा डे
C.Shobha De
C.شوبھا ڈے

D.झुंपा लाहिरी
D.Jhumpa Lahiri
D.جھمپا لہری

Answer: B.अमृता प्रितम
B.Amrita Pritam
B.امریتا پریتم

62 सूचना: दिलेल्या पर्यायांमधून वेगळे ते बाहेर काढा.

DIRECTIONS: Find the odd one out from the given alternatives.

سمت: دیے گئے متبادل میں سے بے جوڑ کو تلاش کرو۔

A.MQRU
A.MQRU
A.MQRU

B.GKLO
B.GKLO
B.GKLO

C.CGHJ
C.CGHJ
C.CGHJ

D.LPQT
D.LPQT
D.LPQT

Answer: C.CGHJ
C.CGHJ
C.CGHJ

63 सूचना : खालील प्रत्येक प्रश्नात दोन विधाने I आणि II दिलेले आहेत. हे विधान एकतर स्वतंत्र कारण असू शकतात किंवा स्वतंत्र कारणांचे परिणाम असू शकतात. यांपैकी एक विधान इतर विधानाचा परिणाम असू शकतो. दोन्ही विधाने वाचा आणि खालीलपैकी कोणत्या उत्तराचा पर्याय या दोन्ही विधानांमधील संबंधांचे वर्णन करतो ते ठरवा.

विधान :
I. नोंद केल्या जाणाऱ्या बलात्काराच्या घटनांची संख्या वाढत आहे.
II. शोषण विरोधात बोलण्यासाठी महिलांना अधिक स्वातंत्र्य मिळत आहे.

DIRECTIONS: Below in each question are given two statements I and II. These statements may be either independent causes or may be effects of independent causes. One of these statements may be the effect of the other statement. Read both the statements and decide which of the following answer choice correctly depicts the relationship between these two statements.

Statements:
I. The number of reported rape cases are increasing.
II. The women are gaining more freedom to speak out against exploitation

ہدایات: نیچے ہر سوال میں دو بیانات I اور II آزاد وجوہات یا پھر آزاد وجوہات کے اثرات ہو سکتے ہیں۔ انہیں گئے ہیں۔ یہ بیانات یا تو آ
بیانات میں سے ایک بیان دوسرے کا اثر ہو سکتا ہے۔دونوں بیانات پڑھیں اور فیصلہ کریں کہ نیچے دیے گئے کس جواب کا انتخاب ان
دونوں بیانات کے در میان تعلق کو ٹھیک سے ظاہر کرتا ہے۔

بیانات:
I – رپورٹ کیے جانے والے ریپ کیسز میں اضافہ ہو رہا ہے۔
II ۔ خواتین کو استحصال کے خلاف بات کرنے کی زیادہ آزادی مل رہی ہے۔

A.विधान I कारण आहे आणि विधान II त्याचा परिणाम आहे;
A.Statement I is the cause and statement II is its effect;
A.بیان نمبر I وجہ ہے اور بیان نمبر II اس کا اثر ہے۔

B.विधान II कारण आहे आणि विधान I त्याचा परिणाम आहे;
B.Statement II is the cause and statement I is its effect;
B.بیان نمبر II وجہ ہے اور بیان نمبر I اس کا اثر ہے۔

C.विधान I आणि II दोन्ही स्वतंत्र कारणे आहेत;
C.Both the statements I and II are independent causes;
C.دونوں بیانات نمبر I اور نمبر II آزاد وجوہات ہیں۔

D.विधान I आणि II दोन्ही स्वतंत्र कारणांचे परिणाम आहेत;
D.Both the statements I and II are effects of independent causes;
D.دونوں بیانات نمبر I اور نمبر II آزاد وجوہات کے اثرات ہیں۔

Answer: B.विधान II कारण आहे आणि विधान I त्याचा परिणाम आहे;
B.Statement II is the cause and statement I is its effect;
B.بیان نمبر II وجہ ہے اور بیان نمبر I اس کا اثر ہے۔

64 180° पेक्षा जास्त आणि ------- पेक्षा कमी मापाच्या कोनाला प्रविशाल कोन म्हटले जाते.

An angle measuring more than 180° and less than---------- is called a reflex angle

180° زاویہ زیادہ اور --------- سے کم پیمائش والا زاویہ کو---------- ریفیکس زاویہ کہا جاتا ہے

A.240°
A.240°
A.240°

B.360°
B.360°
B.360°

C.720°
C.720°
C.720°

D.540°
D.540°
D.540°

Answer: B.360°
B.360°
B.360°

65 सूचना: खालील प्रश्नांमध्ये दिलेल्या पर्यायांमधून संबंधित अक्षर/शब्द/संख्या निवडा.

49 : 94 :: 64 : ?

DIRECTIONS: In the following question, select the related letter/word/number from the given alternatives.

49 : 94 :: 64 : ?

سمت: مندرجہ ذیل سوال میں، دیے گئے متبادل سے متعلقہ حرف/لفظ/نمبر منتخب کریں۔

49 : 94 :: 64 : ?

A.36
A.36
A.36

B.46
B.46
B.46

C.121
C.121
C.121

D.144
D.144
D.144

Answer: B.46
B.46
B.46

66 निर्देश: खालील शब्दांची इंग्रजी शब्दकोशानुसार मांडणी करा.
(a) Didactic
(b) Dictum
(c) Dictionary
(d) Diastole
(e) Dictate

DIRECTIONS: Arrange the following words according to the English dictionary.
(a) Didactic
(b) Dictum
(c) Dictionary
(d) Diastole
(e) Dictate

ہدایت: انگریزی لغت کے مطابق مندرجہ ذیل الفاظ کو مرتب کریں۔

Didactic (a)
Dictum (b)
Dictionary(c)
Diastole (d)
Dictate(d)

A.(b), (d), (c), (a), (e)
A.(b), (d), (c), (a), (e)
A.(b), (d), (c), (a), (e)

B.(b), (d), (c), (e), (a)
B.(b), (d), (c), (e), (a)
B.(b), (d), (c), (e), (a)

C.(d), (e), (c), (b), (a)
C.(d), (e), (c), (b), (a)
C.(d), (e), (c), (b), (a)

D.(d), (b), (c), (e), (a)
D.(d), (b), (c), (e), (a)
D.(d), (b), (c), (e), (a)

Answer: C.(d), (e), (c), (b), (a)
C.(d), (e), (c), (b), (a)
C.(d), (e), (c), (b), (a)

67 शिक्षणाच्या आधुनिक संकल्पनेच्या आधारावर खालीलपैकी अस्वीकार्य आहे?

Which of the following is least acceptable in the light of the modern concept of education?

تعلیم کے جدید تصور کی روشنی میں مندرجہ ذیل میں سے کون سا کم از کم قابل قبول ہے؟

A.मुलाची वैयक्तिक आणि सामाजिक समायोजन शाळेची जबाबदारी आहे आणि वैधपणे गृहित धरले पाहिजे
A.The personal and social adjustment of the child is a responsibility of the school must necessarily and legitimately assumed
A.بچے کی ذاتی اور سماجی ایڈجسٹمنٹ لازمی طور پر اسکول کی ذمہ داری ہے اور قانونی طور پر فرض کیا جانا چاہئے

B.त्याच्या इतर जबाबदार्या महत्त्व असूनही, शाळांचा मुख्य उद्देश्य बौद्धिक आणि शैक्षणिक विकास साठी वातावरण तयार करणे आहे
B.Despite the importance of its other responsibilities, the school exists primarily for the purpose of developing the intellectual and the academic atmosphere
B.اس کی دوسری ذمہ داریوں کی اہمیت کے باوجود، اسکول بنیادی طور پر دانشورانہ اور تعلیمی ماحول کی ترقی کے مقصد کے لئے موجود ہے

C.चांगले दृष्टिकोन व मूल्य विकासाकडे प्रामुख्याने लक्ष दिले गेले पाहिजे
C.Prime consideration should be given to the development of sound attitudes and values
C.واضح رویوں اور اقدار کی ترقی پر ابتدائی غور کرنا چاہئے

D.जरी शिक्षकानं दिल्या गेलेल्या शिक्षे मुळे विद्यार्थ्याला काय लाभ झाले ह्यात अधीक रस असतं, तरीही सामान्यतः ते थेट ह्या मार्गात आणि कार्यपद्धतींमध्ये सहभागी असतात ज्याद्वारे लाभांची पूर्तता केली जाते
D.Although the products of education are also of fundamental interests to educators, teachers are more generally directly involved in the methods and procedures by means of which these products are to be attained
D.اگرچہ تعلیم کی مصنوعات تعلیم پسندوں کے بنیادی مفادات کے حامل ہیں، اساتذہ عام طور پر براہ راست ان طریقوں اور طریقہ کار میں شامل ہوتے ہیں جن کے ذریعہ یہ مصنوعات حاصل کی جاتی ہیں

Answer: B.त्याच्या इतर जबाबदार्या महत्त्व असूनही, शाळांचा मुख्य उद्देश्य बौद्धिक आणि शैक्षणिक विकास साठी वातावरण तयार करणे आहे

B.Despite the importance of its other responsibilities, the school exists primarily for the purpose of developing the intellectual and the academic atmosphere

B.اس کی دوسری ذمہ داریوں کی اہمیت کے باوجود، اسکول بنیادی طور پر دانشورانہ اور تعلیمی ماحول کی ترقی کے مقصد کے لئے موجود ہے

68 सूचना: अर्थपूर्ण परिच्छेद निर्माण करण्यासाठी, खाली दिलेली (P), (Q) (R), (S) आणि (T) ही पाच वाक्ये योग्य अनुक्रमाने पुनर्रचना करा; त्यांनतर खालील प्रश्नांची उत्तर द्या.

P. चतुर कोल्ह्याने प्रत्युत्तर दिले, " मोठा दुष्काळ पडणार आहे आणि माझ्याकडे पाणी असल्याची खात्री करून घेण्यासाठी मी येथे आलो आहे."
Q. एकदा जंगलात एकटाच चालताना एक दुर्दैवी कोल्हा एका विहिरीत पडतो.
R. कोल्ह्याने शेळीवर सहजपणे उडी मारली आणि तिच्या शिंगांचा उपयोग करून तो वर पोहचला, शेळी विहिरीतच राहिली.
S. शेळी भोळेपणाने विश्वास ठेवते आणि विहिरीत उडी मारते.
T. जवळून जाणारी शेळी कोल्ह्याला पहाटे आणि तो विहिरीत काय करतो ते विचारते.

पुनर्रचना केल्यानंतर खालीलपैकी कोणते वाक्य दुसरे असेल?

DIRECTION: Rearrange the following five sentences (P), (Q), (R), (S) and (T) in the proper sequence to form a meaningful paragraph; then answer the questions given below them.
P. The cunning fox responds, “there is going to be a great drought, and I am here to make sure I have water.”
Q. Walking alone in the forest, an unlucky fox falls into a well one day.
R. The fox swiftly jumps on the goat and uses its horns to reach the top, leaving the goat in the well.
S. The gullible goat believes this and jumps into the well.
T. A passing goat sees the fox and asks him why he is in the well.

Which of the following should be the SECOND sentence after rearrangement?

ہدایات: ان پانچ جملوں (P)، (Q)، (R)، (S) اور (T) کو با معنی پیرا بنانے کے لئے دوبارہ ترتیب دیجئے، پھر نیچے دے گئے سوالوں کے جواب دیجئے

P. لالچی لومڑی نے جواب دیا، " ایک بہت بدی قحط سالی آنے والی ہے، اور میں یہاں اسلئے ہوں کہ میرے پاس پانی ہے.
Q. جنگل میں اکیلے چلتے ہوئے، ایک بدکسمت لومڑی کونوے میں گر گیا.
R. لومڑی آرام سے بکری کے اپر چڈ گیا اور اپر آنے تک اسکے سینگ کہ استعمال کیا، بکری کو کنوے میں ہی چھوڈ دیا.
S. احمق بکری نے اس پر یکین کیا اور پانی میں کود گیی.
T. ایک گزرتی ہوئی بکری نے لومڑی کو دیکھا اور پوچھا کہ وو پانی میں کیوں ہے.

دوبارہ ترییب دینے کے بعد کون سا جملہ دوسرا ہونا چاہیے؟

A.T
A.T
A.T

B.Q
B.Q
B.Q

C.P
C.P
C.P

D.R
D.R
D.R

Answer: A.T
A.T
A.T

69 पुढील म्हण पूर्ण करा - ‘ खायला काळ भुईला -------- .’ ‘

A.मार

B.भार

C.खार

D.हार

Answer: B.भार

70 4 किग्रॅ धातूमध्ये 1/5 तांबे आणि उर्वरित झिंक आहे. दुसऱ्या 5 किग्रॅ धातूमध्ये 1/6 तांबे आणि उर्वरित झिंक आहे. या दोन धातूंच्या मिश्रणामधील तांबे आणि झिंकचे गुणोत्तर काय असेल?

4 kg of metal contains 1/5 copper and rest is zinc. Another 5 kg of metal contains 1/6 copper and rest is zinc. The ratio of copper and zinc into the mixture of these two metals is?

4 کلو گرام دھات میں 1/5 تانبے پر مشتمل ہے 1/اور باقی زنک ہے۔ ایک اور 5 کلو گرام دھات6 تانبے پر مشتمل ہے اور باقی زنک ہے۔ ان دونوں دھاتوں کے مرکب میں تانبے اور زنک کا تناسب کیا ہے؟

A.49 : 221
A.49 : 221
A.49 : 221

B.39 : 231
B.39 : 231
B.39 : 231

C.94 : 181
C.94 : 181
C.94 : 181

D.यांपैकी कोणतेही नाही
D.None of these
D.ان مین سے کوئی نہیں

Answer: A.49 : 221
A.49 : 221
A.49 : 221

71 **सूचना:** खालील प्रश्नात उत्तरातील पर्यायांपैकी कोणत्या पर्यायी आकृतीत प्रश्नातील आकृती अंतर्भूत आहे?

DIRECTIONS: In the given question find the answer figure in which question figure is embedded.

ہدایات: دیئے گئے سوال میں جواب والی شکل دریافت کیجیئے جس میں سوال والی شکل سرایت کرگئی ہے۔

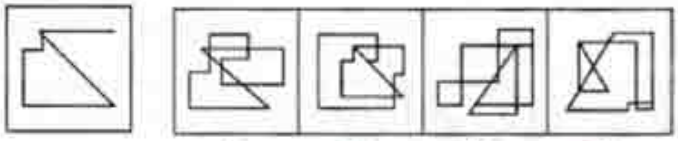

A. (A)

B. (B)

C. (C)

D. (D)

Answer: A. (A)

72 जिंजी किल्ला कुठे स्थित आहे?

Where is the Gingee Fort situated?

گِنگی کا قلعہ ہے :

A.महाराष्ट्र
A.Maharashtra
A.مہاراشٹر

	B.तामिळनाडू B.Tamil Nadu B.تمل ناڈو
	C.तेलंगाना C.Telengana C.تلنگانہ
	D.केरळ D.Kerala D.کیرالہ
Answer:	B.तामिळनाडू B.Tamil Nadu B.تمل ناڈو

73 सूचना: अर्थपूर्ण परिच्छेद निर्माण करण्यासाठी, खाली दिलेली (P), (Q) (R), (S) आणि (T) ही पाच वाक्ये योग्य अनुक्रमाने पुनर्रचना करा; त्यांनतर खालील प्रश्नांची उत्तर द्या.

P. चतुर कोल्ह्याने प्रत्युत्तर दिले, " मोठा दुष्काळ पडणार आहे आणि माझ्याकडे पाणी असल्याची खात्री करून घेण्यासाठी मी येथे आलो आहे."
Q. एकदा जंगलात एकटाच चालताना एक दुर्दैवी कोल्हा एका विहिरीत पडतो.
R. कोल्ह्याने शेळीवर सहजपणे उडी मारली आणि तिच्या शिंगांचा उपयोग करून तो वर पोहचला, शेळी विहिरीतच राहिली.
S. शेळी भोळेपणाने विश्वास ठेवते आणि विहिरीत उडी मारते.
T. जवळून जाणारी शेळी कोल्ह्याला पहाटे आणि तो विहिरीत काय करतो ते विचारते.

पुनर्रचना केल्यानंतर खालीलपैकी कोणते वाक्य तिसरे असेल?

DIRECTION: Rearrange the following five sentences (P), (Q), (R), (S) and (T) in the proper sequence to form a meaningful paragraph; then answer the questions given below them.
P. The cunning fox responds, “there is going to be a great drought, and I am here to make sure I have water.”
Q. Walking alone in the forest, an unlucky fox falls into a well one day.
R. The fox swiftly jumps on the goat and uses its horns to reach the top, leaving the goat in the well.
S. The gullible goat believes this and jumps into the well.
T. A passing goat sees the fox and asks him why he is in the well.

Which of the following should be the THIRD sentence after rearrangement?

ہدایات: ان پانچ جملوں (P)، (Q)، (R)، (S) اور (T) کو با معنی پیرا بنانے کے لئے دوبارہ ترتیب دیجئے، پھر نیچے دے گئے سوالوں کے جواب دیجئے

P. لالچی لومڑی نے جواب دیا، " ایک بہت بدی قحط سالی آنے والی ہے، اور میں یہاں اسلئے ہوں کہ میرے پاس پانی ہے.
Q. جنگل میں اکیلے چلتے ہوئے، ایک بدکسمت لومڑی کونوے میں گر گیا.
R. لومڑی آرام سے بکری کے اپر چڈ گیا اور اپر آنے تک اسکے سینگ کہ استعمال کیا، بکری کو کنوے میں ہی چھوڈ دیا.
S. احمق بکری نے اس پر یکین کیا اور پانی میں کود گیی.
T. ایک گزرتی ہوئی بکری نے لومڑی کو دیکھا اور پوچھا کہ وو پانی میں کیوں ہے.

دوبارہ ترییب دینے کے بعد کون سا جملہ تیسرا ہونا چاہیے

A.P
A.P
A.P

B.Q
B.Q
B.Q

C.R
C.R
C.R

D.S
D.S
D.S

Answer: A.P
A.P
A.P

74 नियमित षटकोनाचा आंटर कोन असतो:

Each interior angle of a regular hexagon is:

باقاعدہ مسدس کا ہر داخلی زاویہ یہ ہے:

A.100°
A.100°
A.100°

B.120°
B.120°
B.120°

C.90°
C.90°
C.90°

D.यांपैकी कोणतेही नाही
D.None of these
D.کوئی نہیں

Answer: B.120°
B.120°
B.120°

75 774 × 326 = ?

774 × 326 = ?

774 × 326 = ?

A.244584
A.244584
A.244584

B.253224
B.253224
B.253224

C.244854
C.244854
C.244854

D.252324
D.252324
D.252324

Answer:

D.252324
D.252324
D.252324

76

गहाळ संख्या शोधा.
Find the missing number.
. گمنام نمبر کھوجے ،

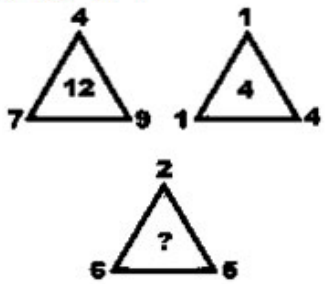

A. 6

B. 9

C. 1

D. 4

Answer:

B. 9

77

सम्राट अशोकाचे पूर्वज कोण होते?

Who was the predecessor of Samrat Ashoka?

سمراٹ اشوک جانشین تھے

A.चंद्रगुप्त मौर्य
A.Chandragupta Maurya
A.چندرگپت موریہ کے

B.बिंबिसार
B.Bimbisara
B.بمبسارا کے

C.दशरथ मौर्य
C.Dashratha Maurya
C.دشرتھ موریہ کے

D.बिंदुसार
D.Bindusara
D.بندوسارا کے

Answer:

D.बिंदुसार
D.Bindusara
D.بندوسارا کے

78

सूचना: खालील माहिती काळजीपूर्वक वाचा आणि खाली दिलेल्या प्रश्नांची उत्तरे द्या.
A, B, C, D, E, F, G आणि H हे आठ मित्र एका गोलाकार टेबलभोवती मध्याभागाकडे बघत बसलेले आहेत. A हा D च्या डावीकडून दुसऱ्या जागेवर बसला आहे, जो E च्या डाव्या बाजूला तिसरा आहे. C हा G च्या उजवीकडील तिसऱ्या जागेवर बसला आहे, जो की E चा तत्काळ शेजारी नाही. H हा B च्या उजवीकडील तिसऱ्या जागेवर बसला आहे, जो G च्या उजवीकडे दुस-या जागेवर आहे.
खालीलपैकी कोणत्या जोडीत दुसरा व्यक्ती पहिल्या व्यक्तीच्या तत्काळ डावीकडे बसलेला आहे?

DIRECTIONS: Read the following information carefully and answer the questions that given below.
A, B, C, D, E, F, G and H are eight friends sitting around a circular table facing the centre. A sits second to the left of D, who is third to the left of E. C sits third to the right of G, who is not an immediate neighbour of E. H sits third to the right of B, who sits second to the right of G.
Which of the following pairs has the second person sitting to the immediate left of the first person?

ہدایات: مندرجہ ذیل معلومات کو دھیان سے پڑھیں اور نیچے دیے گئے سوالوں کے جواب دیں۔
A، B، C، D، E، F، G اور H آٹھ دوست ہیں جو مرکز کا رخ کیے ہوئے ایک گول میز کے ارد گرد بیٹھے ہیں۔ A، D کے بائیں سے دوسرے پر بیٹھا ہے، جو E کے بائیں سے تیسرا ہے۔ C، G کے دائیں سے تیسرے پر بیٹھا ہے، جو H، B کا فوری پڑوسی نہیں ہے۔ E کے دائیں سے دوسری جگہ پر بیٹھا ہے۔ G کے دائیں طرف تیسرے نمبر پر بیٹھا ہے، جو
مندرجہ ذیل جوڑوں میں سے کس میں دوسرا شخص پہلے شخص کے فوری بائیں طرف بیٹھا ہے؟

A.DB
A.DB
A.DB

B.EH
B.EH
B.EH

C.FA
C.FA
C.FA

D.यांपैकी कोणतीही नाही
D.None of these
D.ان میں سے کوئی نہیں

Answer: D.यांपैकी कोणतीही नाही
D.None of these
D.ان میں سے کوئی نہیں

79 P ही Q ची सून आहे आणि R ची मेव्हणी आहे. S हा Q चा एकुलता मुलगा आहे. मग S आणि P चे नाते काय?

P is the daughter-in-law of Q and the sister-in-law of R. S is only son of Q. How is S related to P?

Q P اور R کی بہو ہے S .کا واحد بیٹا ہے Q S .کی بھابی ہے S کا P سے کیا رشتہ ہے؟

A.मेव्हणी
A.Sister-in-law
A.بھابی

B.मेव्हणा
B.Brother-in-law
B.جی جا

C.चुलत भाऊ
C.Cousin
C.چچا زاد

D.पती
D.Husband
D.شوہر

Answer: D.पती
D.Husband
D.شوہر

80 सूचना: खालील प्रत्येक प्रश्नात, तीन विधाने दिली आहेत, ज्यांच्यानंतर चार निष्कर्ष आहेत ज्यांना I, II, III आणि IVअसे अंकित केले आहे. सर्वसामान्यपणे ज्ञात असलेल्या तथ्यांशी विसंगती असली तरीही, हे सत्य असल्याचे तात्पुरते मानून, सामान्यतः ज्ञात असलेल्या तथ्यांकडे दुर्लक्ष करून, दिलेल्या निष्कर्षांपैकी कोणती तर्कशुद्धपणे विधानांचे अनुसरण करतात ते ठरवा.
विधाने :
कोणतेही कारण परिणाम नसते.
सर्व दुर्बळ परिणाम असतात.
काही परिणाम बळकट असतात.
निष्कर्ष:
I. काही बळकट कारण असतात.
II. कोणतेही कारण दुर्बळ नसते.
III. काही बळकट कारण नसतात.
IV. काही दुर्बळ बळकट असतात.

DIRECTION: In each of the following questions, three statements followed by four conclusions marked I, II, III and IV are given. Consider the statements to be true, even though they seem to be at variance with the commonly known facts and find out which of the given conclusion(s) logically fallow(s) the statements, disregarding the commonly known facts.

Statements:
No cause is effect.
All weak are effect
Some effect are strong

Conclusions:
I. Some strong are cause
II. No cause is a week
III. Some strong are not cause
IV. Some weak are strong

ہدایت: مندرجہ ذیل ہر ایک سوال میں، تین بیانات دیے گئے ہیں جن کے بعد چار نتائج دیے گئے ہیں جنھیں I، II، III اور IV سے نشان زد کیا گیا ہے۔ بیانات کے درست ہونے پر غور کریں، اگرچہ وہ عام طور پر معلوم حقائق کے برعکس نظر آتے ہوں اور تلاش کریں کہ کون سے دیے گئے نتائج منطقی طور پر بیانات کی پیروی کرتے ہیں، عام طور پر معلوم حقائق سے قطع نظر۔

بیانات:
کوئی وجہ اثر نہیں ہے۔
سبھی کمزور اثر ہیں۔
کچھ اثر مضبوط ہیں۔

حل:
I. کچھ مضبوط وجہ ہیں
II. کوئی وجہ کمزور نہیں ہے
III. کچھ مضبوط وجہ نہیں ہیں
IV. کچھ کمزور مضبوط ہیں

A.केवळ निष्कर्ष I निघत असल्यास.
A.Only I follows
A.صرف I پیروی کرتا ہے

B.केवळ निष्कर्ष II आणि III निघत असल्यास.
B.Only II and III follow
B.صرف II اور III پیروی کرتے ہیں

C.केवळ निष्कर्ष III निघत असल्यास.
C.Only III follows
C.صرف III پیروی کرتا ہے

D.केवळ निष्कर्ष II, III आणि IV निघत असल्यास.
D.Only II, III and IV follow
D.صرف III، II اور IV پیروی کرتے ہیں

Answer: B.केवळ निष्कर्ष II आणि III निघत असल्यास.
B.Only II and III follow
B.صرف II اور III پیروی کرتے ہیں

81 856 × 789 × 1053 च्या एकक स्थानचा अंक

Unit digit of 856 × 789 × 1053 is

856 × 789 × 1053 کا یونٹ ہندسہ ہے؟

A.1
A.1
A.1

B.2
B.2
B.2

C.3
C.3
C.3

D.4
D.4
D.4

Answer: B.2
B.2
B.2

82 सूचना: अर्थपूर्ण परिच्छेद निर्माण करण्यासाठी, खाली दिलेली (P), (Q) (R), (S) आणि (T) ही पाच वाक्ये योग्य अनुक्रमाने पुनर्रचना करा; त्यांनतर खालील प्रश्नांची उत्तर द्या.

P. चतुर कोल्ह्याने प्रत्युत्तर दिले, " मोठा दुष्काळ पडणार आहे आणि माझ्याकडे पाणी असल्याची खात्री करून घेण्यासाठी मी येथे आलो आहे."
Q. एकदा जंगलात एकटाच चालताना एक दुर्दैवी कोल्हा एका विहिरीत पडतो.
R. कोल्ह्याने शेळीवर सहजपणे उडी मारली आणि तिच्या शिंगांचा उपयोग करून तो वर पोहचला, शेळी विहिरीतच राहिली.
S. शेळी भोळेपणाने विश्वास ठेवते आणि विहिरीत उडी मारते.
T. जवळून जाणारी शेळी कोल्ह्याला पहाटे आणि तो विहिरीत काय करतो ते विचारते.

पुनर्रचना केल्यानंतर खालीलपैकी कोणते वाक्य पाचवे असेल?

DIRECTION: Rearrange the following five sentences (P), (Q), (R), (S) and (T) in the proper sequence to form a meaningful paragraph; then answer the questions given below them.
P. The cunning fox responds, “there is going to be a great drought, and I am here to make sure I have water.”
Q. Walking alone in the forest, an unlucky fox falls into a well one day.
R. The fox swiftly jumps on the goat and uses its horns to reach the top, leaving the goat in the well.
S. The gullible goat believes this and jumps into the well.
T. A passing goat sees the fox and asks him why he is in the well.

Which of the following should be the FIFTH sentence after rearrangement?

ہدایات: ان پانچ جملوں (P)، (Q)، (R)، (S) اور (T) کو با معنی پیرا بنانے کے لئے دوبارہ ترتیب دیجئے، پھر نیچے دے گئے سوالوں کے جواب دیجئے

P. لالچی لومڑی نے جواب دیا، " ایک بہت بدی قحط سالی آنے والی ہے، اور میں یہاں اسلئے ہوں کہ میرے پاس پانی ہے.
Q. جنگل میں اکیلے چلتے ہوئے، ایک بدکسمت لومڑی کونوے میں گر گیا.
R. لومڑی آرام سے بکری کے اپر چڑ گیا اور اپر آنے تک اسکے سینگ کہ استعمال کیا، بکری کو کنوے میں ہی چھوڑ دیا.
S. احمق بکری نے اس پر یکین کیا اور پانی میں کود گیی.
T. ایک گزرتی ہوئی بکری نے لومڑی کو دیکھا اور پوچھا کہ وو پانی میں کیوں ہے.

دوبارہ ترییب دینے کے بعد کون سا جملہ پانچوہ ہونا چاہیے؟

A.R
A.R
A.R

B.S
B.S
B.S

C.P
C.P
C.P

D.Q
D.Q
D.Q

Answer: A.R
A.R
A.R

83 जर आपली शाळा झोपडपट्टीच्या परिसरात स्थित असेल आणि त्या मुले आपल्या शाळांच्या पर्यावरण प्रभावित होत असेल, आपल्या विद्यार्थ्यांना हेच्या पासून लांब ठेवण्यासाठी आपण काय कराल ?

If your school is located near a slum area, which affects your schools' environment, what steps will you take to keep away your students?

اگر آپ کا اسکول ایک کچے علاقے کے قریب واقع ہے، جس سے آپ کے سکول کا ماحول متاثر ہوتا ہے، آپ اپنے طالب علموں کو دور رکھنے کے لئے کیا اقدامات کریں گے؟

A.आपण स्वतः च्या इच्छेनुसार विद्यार्थ्यांना निवडू आणि झोपडपट्टीत सेवा करू
A.You will voluntary select the students and do service in the slum area
A.آپ رضاکارانہ طور پر طلباء کو منتخب کریں اور کچے علاقے میں خدمت کریں گے

B.आपण शालेय स्वच्छता आणि वृक्षारोपण यावर अधिक भर देणार
B.You will give more emphasis on school sanitation and plantation
B.آپ اسکول کی صفائی اور پودوں پر مزید زور دیں گے

C.आपण मुलांसाठी पर्यावरण कृती-आधारित शिक्षण योजना विकसित कराल
C.You will develop action-oriented plan for environmental education for
C.آپ بچوں کے لئے ماحولیاتی تعلیم کے لئے کارروائی پر مبنی منصوبہ تیار کریں گے

D.आपण प्रत्येक विद्यार्थ्याला रोप देऊ ज्याची ते शाळेत असताना काळजी घेण्यास सांगू
D.You will allot one plant to each student to look after throughout his time in school.
D.آپ ہر ایک طالب علم کو ایک پودے کی دیکھ بھال کی ذمہ داری دیں گے کہ وہ اسکول کے وقت میں اسے دیکھیں.

Answer: C.आपण मुलांसाठी पर्यावरण कृती-आधारित शिक्षण योजना विकसित कराल
C.You will develop action-oriented plan for environmental education for
C.آپ بچوں کے لئے ماحولیاتی تعلیم کے لئے کارروائی پر مبنی منصوبہ تیار کریں گے

84 सूचना : खालील प्रत्येक प्रश्नात दोन विधाने I आणि II दिलेले आहेत. हे विधान एकतर स्वतंत्र कारण असू शकतात किंवा स्वतंत्र कारणांचे परिणाम असू शकतात. यांपैकी एक विधान इतर विधानाचा परिणाम असू शकतो. दोन्ही विधाने वाचा आणि खालीलपैकी कोणत्या उत्तराचा पर्याय या दोन्ही विधानांमधील संबंधांचे वर्णन करतो ते ठरवा.

विधान :
I. भारताने या वर्षी चहा निर्यातीच्या मूल्याला मागे टाकले आहे.
II. गेल्या दोन वर्षांत देशांतर्गत बाजारपेठेत कॉफीची मागणी वाढली आहे.

DIRECTIONS: Below in each question are given two statements I and II. These statements may be either independent causes or may be effects of independent causes. One of these statements may be the effect of the other statement. Read both the statements and decide which of the following answer choice correctly depicts the relationship between these two statements.

Statements:
I. India has surpassed the value of tea exports this year
II. There is an increase in demand of coffee in the domestic market during the last two years.

ہدایات: نیچے ہر سوال میں دو بیانات I اور II آزاد وجوہات یا پھر آزاد وجوہات کے اثرات ہو سکتے ہیں۔ انہیں گئے ہیں۔ یہ بیانات یا تو
بیانات میں سے ایک بیان دوسرے کا اثر ہو سکتا ہے۔دونوں بیانات پڑھیں اور فیصلہ کریں کہ نیچے دیے گئے کس جواب کا انتخاب ان
دونوں بیانات کے در میان تعلق کو ٹھیک سے ظاہر کرتا ہے۔

بیانات:
I – انڈیا نے اس سال چائے کی برآمدات کی قدر میں اضافہ کیا ہے۔
II ۔ گذشتہ دو سالو ں کے دوران ڈومیسٹک مارکیٹ میں کافی کی طلب میں اضافہ ہوا ہے۔

A.विधान I कारण आहे आणि विधान II त्याचा परिणाम आहे;
A.Statement I is the cause and statement II is its effect;
A. بیان نمبر I وجہ ہے اور بیان نمبر II اس کا اثر ہے۔

B.विधान II कारण आहे आणि विधान I त्याचा परिणाम आहे
B.Statement II is the cause and statement I is its effect;
B. بیان نمبر II وجہ ہے اور بیان نمبر I اس کا اثر ہے۔

C.विधान I आणि II दोन्ही स्वतंत्र कारणे आहेत;
C.Both the statements I and II are independent causes;
C.دونوں بیانات نمبر I اور نمبر II آزاد وجوہات ہیں۔

D.विधान I आणि II दोन्ही काही सामान्य कारणांचे परिणाम आहेत.
D.Both the statements I and II are effects of independent causes;
D.دونوں بیانات نمبر I اور نمبر II کسی ایک وجہ کے اثرات ہیں۔

Answer: D.विधान I आणि II दोन्ही काही सामान्य कारणांचे परिणाम आहेत.
D.Both the statements I and II are effects of independent causes;
D.دونوں بیانات نمبر I اور نمبر II کسی ایک وجہ کے اثرات ہیں۔

85 समजा की आपल्या पती / पतीच्या बरोबर आपले भांडण झाले, तर त्याचे निराकरण करण्यासाठी आपण काय कराल?

Suppose you were involved in some conflict with your wife/husband, what will you do to resolve it?

فرض کریں کہ آپ اپنی بیوی / شوہر کے ساتھ تنازعات میں ملوث تھے، آپ اسے حل کرنے کے لئے کیا کریں گے؟

A.आपण अहंकार उच्च ठेवू
A.You will keep high-ego
A.آپ اپنی انا کواوپر رکھیں گے

B.विवाद न करता तुम्ही योग्य मार्गांचा अवलंब कराल
B.You will follow the right path without controversy
B.آپ بغیر کسی تنازعہ کے درست راستے پر عمل کریں گے

C.आपल्या प्रभुत्व आणि श्रेष्ठत्व राखण्यासाठी आपण आपल्या अनैसर्गिक क्रोधचे प्रदर्शन कराल
C.You will exhibit your unnatural anger to maintain your dominance and supremacy
C.آپ اپنے غلبہ اور استحکام کو برقرار رکھنے کے لئے غیر معمولی غصہ کا مظاہرہ کریں گے

D.आपण आपल्या मुद्द्यावर अटळ रहाल
D.You will stick to your point
D.آپ اپنے نقطہ نظر پر رہیں گے

Answer: B.विवाद न करता तुम्ही योग्य मार्गांचा अवलंब कराल
B.You will follow the right path without controversy
B.آپ بغیر کسی تنازعہ کے درست راستے پر عمل کریں گے

86 तामिळनाडूचे मुख्य मंत्री कोण आहेत?

Who is the Chief Minister of Tamil Nadu?

: تامل ناڈوکے وزیر اعلیٰ ہیں

A.ओ. पन्नेरसेल्वम
A.O. Panneerselvam
A.او پنیر سلوم

B.के. पालानीश्वामी
B.K. Palaniswami
B.کے پلانی سوامی

C.हा राष्ट्रपती शासनाखाली आहे
C.It is under Presidents Rule
C. تامل ناڈو میں صدر راج ہے

D.यांपैकी कोणतेही नाही
D.None of these
D.انمیں سے کوئی نہیں

Answer: B.के. पालानीश्वामी
B.K. Palaniswami
B.کے پلانی سوامی

87 विधान:
स्थानिक समाजाचे अध्यक्ष एका समाजातील एका बागेत बसून समाजातील एका मुलीला घेऊन बाहेर पडले.

कृतीचा कोर्स:
I. मुलगी आणि मुलगा यांना चेतावणी दिली पाहिजे आणि त्यांना त्यांच्या पालकांना द्यावे.
II. मुलगा आणि मुलगी पोलिसांना द्यावी.

Statement:
President of the local society caught a girl of the society sitting with a boy in a park outside society.

Course of actions:
I. The girl and boy should be given a warning and they should be handed over to their parents.
II. The boy and the girl should be handed over to the police.

بیان:
لوکل سوسائٹی کے صدر نے سوسائٹی کی ایک لڑکی کو سوسائٹی سے باہر ایک پارک میں ایک لڑکے کے ساتھ بیٹھے ہوئے پکڑ لیا۔

لائحہ عمل:
I۔ لڑکے اور لڑکی دونوں کو وارننگ دی جانی چاہیے اور انہیں ان کے والدین کے حوالے کیا جانا چاہیے۔
II۔ لڑکے اور لڑکی کو پولیس کے حوالے کیا جانا چاہیے۔

A.फक्त I अनुसरून आहे
A.Only I follows
A. صرف I لاگو ہو گا۔

B.फक्त II अनुसरण करते आहे
B.Only II follows
B. صرف II لاگو ہو گا۔

C.एकतर I किंवा II अनुसरून आहे
C.Either I or II follows
C. I یا II میں سے ایک لاگو ہو گا۔

D.I किंवा II दोन्हीपैकी काहीही अनुसरण करत नाही
D.Neither I nor II follows
D. I اور II میں سے کوئی بھی لاگو نہیں ہو گا۔

Answer: D.I किंवा II दोन्हीपैकी काहीही अनुसरण करत नाही
D.Neither I nor II follows
D. I اور II میں سے کوئی بھی لاگو نہیں ہو گا۔

88 सूचना: खालील प्रश्नांमध्ये दिलेल्या पर्यायांमधून संबंधित अक्षर/शब्द/संख्या निवडा.

दिलेला संच (9, 27, 81)

DIRECTIONS: In the following question, select the related letter/word/number from the given alternatives.

Given set : (9, 27, 81)

سمت: مندرجہ ذیل سوال میں، دیے گئے متبادل سے متعلقہ حرف/لفظ/نمبر منتخب کریں۔

(دیا گیا سیٹ: (9, 27, 81

A.(1, 9, 25)
A.(1, 9, 25)
A.(1, 9, 25)

B.(4, 12, 36)
B.(4, 12, 36)
B.(4, 12, 36)

C.(81, 36, 49)
C.(81, 36, 49)
C.(81, 36, 49)

D.(2, 4, 8)
D.(2, 4, 8)
D.(2, 4, 8)

Answer: B.(4, 12, 36)
B.(4, 12, 36)
B.(4, 12, 36)

89 जर a:b=8:6 आणि b:c= 6:4 असेल. तर a:b:c शोधा.

If a:b=8:6 and b:c= 6:4. Find a:b:c?

اگر a:b=8:6 اور b:c= 6:4 تو a:b:c معلوم کریں؟

A.8:3:2
A.8:3:2
A.8:3:2

B.8:6:1
B.8:6:1
B.8:6:1

C.4:3:2
C.4:3:2
C.4:3:2

D.4:6:2
D.4:6:2
D.4:6:2

Answer: C.4:3:2
C.4:3:2
C.4:3:2

90 उष्णतेच्या पुरवठ्यावर घनपदार्थाचे द्रवपदार्थामध्ये रूपांतर होण्याच्या प्रक्रियेला म्हणतात:

The process of solid changing into liquid upon the supply of heat is called:

گرمی کی فراہمی پر ٹھوس کے مائع میں تبدیل کرنے کے عمل کو کہا جاتا ہے:

A.घनीभवन
A.Condensation
A.کثافت

B.बाष्पीभवन
B.Evaporation
B.بھاپ میں بدلنا

C.द्रवीभवन
C.Melting
C.پگھلنا

D.उत्कलन
D.Boiling
D.ابالنا

Answer: C.द्रवीभवन
C.Melting
C.پگھلنا

For More Info And Videos About TAIT-Exam Syllabus And Other Exam Visit My Channel
TAIT च्या 30 प्रश्नपत्रिका PDF
BADSHAHimp Available Request 9765226781
WWW.YouTube.com/BADSHAHimp
Subscribe My Channel

91 वाहतूक व्यवस्थेची साधने किती आहेत?

How many modes of transportation are there?

ذرائع آمد و رفت کے کتنے طریقہ ہیں۔

A.तीन
A.Three
A. تین

B.दोन
B.Two
B. دو

C.एक
C.One
C. ایک

D.पाच
D.Five
D. پانچ

Answer:
A.तीन
A.Three
A. تین

92 एका विशिष्ट सांकेतिक भाषेमध्ये, जर BARRICADE हा शब्द AABCDEIRR असा कूटबध्द केला जात असेल, INDIVIDUAL हा शब्द त्या भाषेत कसा कूटबध्द केला जाईल?

In a certain code language, if the word BARRICADE is coded as AABCDEIRR, then how is the word INDIVIDUAL coded in that language?

ایک مخصوص ضابطے کی زبان میں، اگر لفظ BARRICADE کو AABCDEIRR لکھا جاتا ہے، تو اس زبان میں لفظ INDIVIDUAL کو کیسے لکھاجائیگا؟

A.ADDIIILNUV
A.ADDIIILNUV
A.ADDIIILNUV

B.ADDIIINLUV
B.ADDIIINLUV
B.ADDIIINLUV

C.AIIIUDDLNV
C.AIIIUDDLNV
C.AIIIUDDLNV

For More Info And Videos About TAIT-Exam Syllabus And Other Exam Visit My Channel
TAIT च्या 30 प्रश्नपत्रिका PDF
BADSHAHimp Available Request 9765226781
WWW.YouTube.com/BADSHAHimp
Subscribe My Channel

D.ADDINIILUV
D.ADDINIILUV
D.ADDINIILUV

Answer: A.ADDIIILNUV
A.ADDIIILNUV
A.ADDIIILNUV

93 11:10 ला मिनिट आणि तास काट्यादरम्यान कोणता कोण असेल?

What is the angle between minute and hour hand at 11:10?

11:10 بجے منٹ اور گھنٹہ کی سوئیاں کونسا زاویہ بنائیں گی؟

A.265°
A.265°
A.265°

B.175°
B.175°
B.175°

C.85°
C.85°
C.85°

D.95°
D.95°
D.95°

Answer: C.85°
C.85°
C.85°

94 मालिकेचा मध्यक काढा:
70, 100, 120

Find the median for the series:
70, 100, 120

دی ہوئی سیریز کا اوسط (میڈین) ہوگا
70, 100, 120

For More Info And Videos About TAIT-Exam Syllabus And Other Exam Visit My Channel
TAIT च्या 30 प्रश्नपत्रिका PDF
BADSHAHimp Available Request 9765226781
WWW.YouTube.com/BADSHAHimp
Subscribe My Channel

A.60
A.60
A.60

B.90
B.90
B.90

C.80
C.80
C.80

D.100
D.100
D.100

Answer: D.100
D.100
D.100

95 जर कोळशाची किंमत 25% नी वाढवली, तर खर्च वाढू नये यासाठी कोळशाचा उपभोग किती टक्क्यांनी कमी केला जावा?

If the price of coal is increased by 25%, by what percent the consumption of coal must be reduced so that expenditure is not increased?

اگر کوئلہ کی قیمت 25% تک بڑھتی ہے تو، کوئلہ کی کھپت کوکتنا کم کرنا ضروری ہے تاکہ اخراجات میں اضافہ نہ ہو.

A.20%
A.20%
A.20%

B.25%
B.25%
B.25%

C.33%
C.33%
C.33%

D.5%
D.5%
D.5%

Answer: A.20%
A.20%
A.20%

For More Info And Videos About TAIT-Exam Syllabus And Other Exam Visit My Channel
TAIT च्या 30 प्रश्नपत्रिका PDF
BADSHAHimp Available Request 9765226781
WWW.YouTube.com/BADSHAHimp
Subscribe My Channel

96	$x^2–x–2=0$ या वर्गसमीकरणाची मुळे आहेत: The roots of the quadratic equation $x^2–x–2=0$ are: $x^2–x–2=0$ مربع مساوات کے روٹ ہیں:
	A.1,2 A.1,2 A.1,2
	B.-2, B.-2, B.-2,
	C.2, 1 C.2, 1 C.2, 1
	D.2,-1 D.2,-1 D.2,-1
Answer:	D.2,-1 D.2,-1 D.2,-1

97	निर्देश: खालील प्रश्नांमध्ये प्रश्न चिन्हाच्या (?) जागी कोणते अंदाजे मूल्य यायला हवे? 1.34 × 127+1.15 × 23=? DIRECTIONS: What approximate value should come in the place of question mark (?) in the following equations. 1.34 × 127+1.15 × 23=? ہدایات: مندرجہ ذیل سوال میں سوال کا نشان (?) کی جگہ پر کون سا تخمینہ ویلیو آئے گا - 1.34 × 127+1.15 × 23=?
	A.140 A.140 A.140
	B.165 B.165 B.165

For More Info And Videos About TAIT-Exam Syllabus And Other Exam Visit My Channel
BADSHAHimp TAIT च्या 30 प्रश्नपत्रिका PDF Available Request 9765226781
YouTube WWW.YouTube.com/BADSHAHimp Subscribe My Channel

C.150
C.150
C.150

D.200
D.200
D.200

Answer: D.200
D.200
D.200

98 सूचना: प्रत्येक प्रश्नाला एक प्रमुख विधानासोबत चार विधाने आहेत ज्यांच्याखाली A, B, C आणि D असे चार विधान आहेत. क्रमवार विधानांची जोडी निवडा ज्यामध्ये प्रथम विधान दुसऱ्या विधानाला सुचवते, आणि दोन्ही विधाने तर्किकदृष्ट्या प्रमुख विधानासोबत निगडित असेल.

मुख्य इमारत एकतर दक्षिण भागात किंवा पूर्व भागात आहे.
A. मुख्य इमारत दक्षिण भागात आहे.
B. मुख्य इमारत दक्षिण भागात नाही.
C. मुख्य इमारत ईस्ट भागात आहे.
D. मुख्य इमारत पूर्व भागात नाही.

DIRECTIONS: Each question has a main statement followed by four statements labelled A, B, C and D. Choose the ordered pair of statements, where the first statement implies the second, and the two statements are logically consistent with the main statement.

The main building is either in south or in east
A. The main building is in south
B.The main building is not in south
C.The main building is in East
D.The main building is not in East

ہدایت: ہر سوال میں ایک جملہ ہے جسکے بعد چار جملےاے، بی،سی اور ڈی کے نام سے دئے گئے ہیں اسمیں منسلک جوڑیوں کو چنئے۔ جہاں پہلا جملہ دوسرے جملہ کی اور اشارہ کر رہا ہے اور دو جملے منطقی مرکزی بیان کے مطابق ہیں

مرکزی عمارت یا جنوب میں ہے یا مشرق میں
Aمرکزی عمارت جنوب میں ہے ۔
Bمرکزی عمارت جنوب میں نہیں ہے ۔
Cمرکزی عمارت مشرق میں ہے ۔
Dمرکزی عمارت مشرق میں نہیں ہے ۔

A.BD
A.BD
A.BD

For More Info And Videos About TAIT-Exam Syllabus And Other Exam Visit My Channel
TAIT च्या 30 प्रश्नपत्रिका PDF
BADSHAHimp Available Request 9765226781
WWW.YouTube.com/BADSHAHimp
Subscribe My Channel

B.DA
B.DA
B.DA

C.CB
C.CB
C.CB

D.AB
D.AB
D.AB

Answer: B.DA
B.DA
B.DA

99 जर ,9=4 ,7=3 ,5=2 ,3=1 तर?=7

If 1=3, 2=5, 3=7, 4=9, then 7=?

اگر 1=3، 2=5، 3=7، 4=9، تو 7=?

A. 15

B. 13

C. 17

D. 11

Answer: A. 15

100 सी ए एस _____ या वयाच्या दरम्यानच्या मुलांना दिले जाऊ शकते.

CAS can be administered to the children between the ages of

CAS (کیس)کس عمر کے بچوں کے درمیان منظم کیا جا سکتا ہے؟

A.8 – 16
A.8 – 16
A.8 – 16

B.5 – 18
B.5 – 18
B.5 – 18

C.2 – 5
C.2 – 5
C.2 – 5

D.9 – 12
D.9 – 12
D.9 – 12

Answer: B.5 – 18
B.5 – 18
B.5 – 18

101 Out of the given options, choose the most appropriate one to fill in the blank.
An unforeseen difficulty_____.

A.has arisen

B.have arise

C.has arise

D.have arisen

Answer: A.has arisen

For More Info And Videos About TAIT-Exam Syllabus And Other Exam Visit My Channel
TAIT च्या 30 प्रश्नपत्रिका PDF
BADSHAHimp Available Request 9765226781
WWW.YouTube.com/BADSHAHimp
Subscribe My Channel

102 खालील प्रश्नात एक आकृतिबंध दाखविला आहे आणि तो कळीची आकृती म्हणून नोंदला आहे. कागदाच्या मागच्या बाजूने बघितल्यास मूळची कळीची आकृती अचूकपणे कशी दिसेल हे तुम्हाला ठरवायचे आहे.

DIRECTIONS: In the following question, a design is given, marked as key figure. You have to determine which will be the exact view of the original key figure seen from the reverse side of the paper.

ہدایات: نیچے کے سوال میں نقش دیا گیا ہے، جس پر اہم شکل کا نشان لگا ہے آپ کو یہ طے کرنا ہے کہ اہم شکل کا قطعی منظر کاغذ کی الٹی طرف سے کونسا ہوگا؟

मुख्य आकृती
Main Figure
اصل شکل



उत्तरासाठी पर्यायी आकृत्या
Answer Figure
جوابی شکل



A B C D

A. (A)

B. (B)

C. (C)

D. (D)

Answer: C. (C)

103 निर्देश: खालीदिलेल्या अक्षराच्या क्रमात काही अक्षरे गहाळ केली आहेत ते त्या क्रमाने खाली दिलेल्या पर्यायांपैकी एक आहे

abc _ ba _ baca _ caba _ b _ c

DIRECTIONS: In each of the following letter series, same of the letters are missing which are given in that order as one of the alternatives below it.

abc _ ba _ baca _ caba _ b _ c

ہدایت جیل کے حرف سرج میں کوئی حرف گمشدہ ہے آپکو انکی شناخت جیل کے اختیارات سے کرنی ہے

abc _ ba _ baca _ caba _ b _ c

A.abcca
A.abcca
A.abcca

B.abbca
B.abbca
B.abbca

C.acbca
C.acbca
C.acbca

D.acacb
D.acacb
D.acacb

Answer: C.acbca
C.acbca
C.acbca

104 ‘ त्याचा मित्र पुस्तक-विक्रेता होता.’ या वाक्यातील विशेषण ओळखा.

A.त्याचा

B.मित्र

C.पुस्तक

D.विक्रेता

Answer: C.पुस्तक

105 बेकरीमध्ये ब्रेड तयार करतांना यिस्ट वापरतात कारण ते

Bakeries use yeast in bread making because it

بیکری میں بریڈ بنانے کے لئے خمیر کا استعمال کیا جاتا ہے کیونکہ یہ

A.ब्रेडला कडक करते
A.Makes the bread hard
A.ریڈ کو سخت بنا دیتی ہے

B.ब्रेडला मुलायम आणि मऊ करते
B.Makes the bread soft and spongy
B.بریڈ کو نرم اور اسپنجی بنا دیتی ہے

C.खाद्यपदार्थाचे मुल्य वाढवते
C.Enhances the food values
C.غذا کے ویلوز کو بڑھا دیتی ہے

D.ब्रेडला ताजे ठेवते
D.Keeps the bread fresh
D.بریڈ کو تازہ رکھتی ہے

Answer: B.ब्रेडला मुलायम आणि मऊ करते
B.Makes the bread soft and spongy
B.بریڈ کو نرم اور اسپنجی بنا دیتی ہے

106 बटाटे हा कशाचा प्रकार आहेत-

Potatoes are a type of -

: آلو قسم ہے

A.भाजी
A.Vegetable
A.سبزی کی

B.फळं
B.Fruit
B.پھل کی

C.सुधारित पाने
C.Modified Leaves
C.تبدیل شدہ پتوں کی

D.शेंगांची मुळं
D.Leguminous Roots
D. . جڑ کی Leguminous

Answer: A.भाजी
A.Vegetable
A.سبزی کی

107 खाली दिलेल्या शब्दांची अर्थपूर्ण क्रमाने मांडणी करा.

1. कापणे
2. ठेवणे
3. चिन्हांकीत करणे
4. मोजमाप
5. शिवणे

Arrange the words given below in a meaningful sequence.

1. Cut
2. Put on
3. Mark
4. Measure
5. Stich

ایک معنی خیز ترتیب میں نیچے دیےگیے الفاظ کو مرتب کریں.

1. کٹ
2. ڈالیں
3. نشان
4. پیمائش
5. اسٹروک

A.3, 1, 5, 4, 2
A.3, 1, 5, 4, 2
A.3, 1, 5, 4, 2

B.2, 4, 3, 1, 5
B.2, 4, 3, 1, 5
B.2, 4, 3, 1, 5

C.1, 3, 2, 4, 5
C.1, 3, 2, 4, 5
C.1, 3, 2, 4, 5

D.4, 3, 1, 5, 2
D.4, 3, 1, 5, 2
D.4, 3, 1, 5, 2

Answer: D.4, 3, 1, 5, 2
D.4, 3, 1, 5, 2
D.4, 3, 1, 5, 2

108

सूचना: खालील प्रश्नात कागदाच्या एक तुकड्याला (चौकोनी / गोलाकार / त्रिकोणी) घड्या घातल्या आहेत व भोके पाडली आहेत. हा कागद उलगडल्यावर प्रश्नातील आकृतीप्रमाणे दिसतो. उत्तरादाखल पर्यायांमधून अशी आकृती निवडा जी उलगडल्यावर कागदाचे स्वरूप प्रश्नात दाखविल्याप्रमाणे दिसेल.

DIRECTIONS: In the following questions a sheet (square/circle/triangle) of paper is folder and punch is made. When unfolded the paper sheet looks like the question figure. See the answer figures and select the one that follows the manner in which the paper is folded and punch is made.

ہدایات: نیچے دیئے گئے سوال میں، کاغذ کی شیٹ (مثلث، مربع، دائرہ) فولڈ کرکے پنچ لگائی گئی ہے، جب بغیر فولڈ کی ہوئی کا عکس کی شیٹ سوالیہ شکل کی طرح دکھتی ہے، جوابی شکلوں کو دیکھ کر اسکو چنئے جو ایسی لگے کہ، کاغذ شیٹ کو فولڈ کرکے پنچ لگایا گیا ہے۔

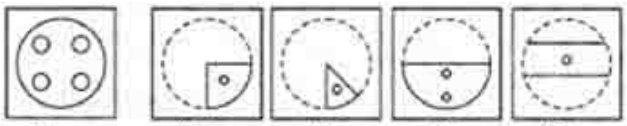

A. (A)

B. (B)

C. (C)

D. (D)

Answer: A. (A)

109

त्यापैकी कोणता लघुग्रह आहे?

Which of them is an asteroid?

ان میں سے کون ایک اسٹرائڈ ہے؟

A.इरॉस
A.Eros
A.ایروس

B.शुक्रतारा
B.Venus
B.وینس

C.सेरेस
C.Ceres
C.سیریس

D.चंद्र
D.Moon
D.چاند

Answer: A.इरॉस
A.Eros
A.ایروس

110 गोलु हा भोलाचा मुलगा आहे. शीतल ही गोलुची मुलगी आहे. चित्रा ही दिलिपची मुलगी आहे आणि दिलिप हा भोलाचा भाऊ आहे. चित्रा आणि गोलु यांचे नाते काय?

Golu is the son of Bhola. Sheetal is the daugther of Golu. Chitra is the daughter of Dilip and Dilip is the brother of Bhola. How is Chitra related to Golu ?

گولو بھولا کا بیٹا ہے. شیتل گولو کی بیٹی ہے. چترا دلیپ کی بیٹی ہے اور دلیپ بھولا کا بھائی ہے. چترا کا گولو سے کیا رشتہ ہے؟

A.बहीण
A.Sister
A.بہن

B.आई
B.Mother
B.ماں

C.चुलत बहीण
C.Cousin
C.چچا زاد

D.सासू
D.Mother-in-Law
D.ساس

Answer: C.चुलत बहीण
C.Cousin
C.چچا زاد

111 A ही ट्रेन 50 किमी अंतर पूर्ण करण्यासाठी 35 मिनिटे घेते. जर ट्रेन B ची गती ट्रेन A च्या गतीपेक्षा 25% जास्त असेल, तर ती सारखे अंतर किती वेळात पूर्ण करेल:

Train A took 35 minute to cover a distance of 50 km. If the speed of train B is 25% faster than train A, it will cover the same distance in:

50 کلومیٹر کے فاصلے کو طے کرنے کے لئے 35 منٹ لگاتی ہے۔ اگر ٹرین Aٹرین B کی رفتار سے 25% تیز ہے، A کی رفتار
تو وہ اس فاصلے کو طے کرے گی:

A.25 मिनिट
A.25 minute
A.25 منٹ

B.28 मिनिट
B.28 minute
B.28 منٹ

C.30 मिनिट
C.30 minute
C.30 منٹ

D.36 मिनिट
D.36 minute
D.36 منٹ

Answer: B.28 मिनिट
B.28 minute
B.28 منٹ

112 आकडेमोड करता न येणे (डिस्कॅल्क्युलिया) हा ____ विकार आहे

Dyscalculia is ____ disorder

گننے کی صلاحیت کا مفقود ہوجانا ہے_____ خرابی

A.वाचन अक्षमता
A.Reading disability
A.پڑھنے کی معذوری

B.गणिती अक्षमता
B.Mathematical disability
B.ریاضی معذوری

C.बोली अक्षमता
C.Speaking disability
C.بولنے کی نااہلی

D.श्रावण अक्षमता
D.Listening ability
D.سماعت کی اہلیت

Answer: B.गणिती अक्षमता
B.Mathematical disability
B.ریاضی معذوری

113 'हेवा' या शब्दाचा समानार्थी शब्द कोणता ?

	A.कौतुक
	B.प्रशंसा
	C.असुया
	D.हेका
Answer:	C.असुया

114	Out of the given four words only one is spelt correctly. Find the word that is correctly spelt.
	A.Disappear
	B.Gaurd
	C.Immegiatly
	D.Appearence
Answer:	A.Disappear

115	स्पिअरमॅनने ____ घटक सिद्धांत मांडला Spearman proposed_____ factor theory اسپیئرمین نے_____ عنصر کا نظریہ پیش کیا ہے
	A.2 A.2 A.2
	B.3 B.3 B.3
	C.4 C.4 C.4
	D.6 D.6 D.6

Answer: A.2
A.2
A.2

116 Fill in the blank with the correct article.
_____ main orchestral brass instruments are the horn, trumpet, trombone, and tuba.

A.The

B.A

C.An

D.No article required

Answer: A.The

117 निर्देश: खालील व्यवस्था काळजीपूर्वक वाचा आणि खाली दिलेल्या प्रश्नांची उत्तरे द्या:

B 5 R 1@E K 4 F 7©DAM 2 P 3%9 H I W 8*6 U J$V Q#

उपरोक्त व्यवस्थेत अशे किती चिन्ह आहेत कि जे तत्काळ एका संख्येने पुढे जाते परंतु लगेचच व्यंजनाद्वारे येत नाही?

DIRECTIONS: Study the following arrangement carefully and answer the questions given below:

B 5 R 1@E K 4 F 7©DAM 2 P 3%9 H I W 8*6 U J$V Q#

How many such symbols are there in the above arrangement each of which is immediately preceded by a number but not immediately followed by a consonant?

ہدایت نیچے دی گی ترتیب کو پڑھئے اور سہی جواب دیجئے

B 5 R 1@E K 4 F 7©DAM 2 P 3%9 H I W 8*6 U J$V Q#

اپنی ترتیب مے ایسے کتنے نشان ہیں جنکے آگے کوئی نمبر ہے اور پیچھے کونسونانٹ ہیں؟

A.काहीही नाही
A.None
A.کوئی نہیں

B.एक
B.One
B.ایک

C.दोन
C.Two
C.دو

D.तीन
D.Three
D.تین

Answer: D.तीन
D.Three
D.تین

118 जर $\frac{1120}{\sqrt{p}} = 80$ असेल ,तर p किती असेल:

If $\frac{1120}{\sqrt{p}} = 80$ then p is equal to:

اگر $\frac{1120}{\sqrt{p}} = 80$ تو پھر p مساوی ہے:

A. 14

B. 140

C. 196

D. 225

Answer: C. 196

119 खालीलपैकी कोणते विधान उष्मारोधीचे उदाहरण आहे?

Which of the following statement is an example of insulator?

مندرجہ ذیل میں سے کونسا بیان انسولیٹر کی ایک مثال ہے؟

A.रबर
A.Rubber
A.ربر

B.तांबे
B.Copper
B.تانبا

C.अल्युमिनियम
C.Aluminium
C.الومونیم

D.अशुद्ध पाणी
D.Impure water
D.غیر خالص پانی

Answer: A.रबर
A.Rubber
A.ربر

120 निर्देश: खालील प्रश्न दिलेल्या शब्दांवर आधारित आहेत.

here/ bright/ pride/ stout

जर दिलेल्या शब्दातील अक्षर हे इंग्रजी वर्णमालेप्रमाणे त्याच्या पुढल्या अक्षराने पुनर्स्थित केले असल्यास किती शब्दान मध्ये कमीत कमी एक स्वर राहिल ?

DIRECTIONS: Following question is based on the given words.

here/ bright/ pride/ stout

If each of the letters in the given words is replaced by its next letter in the English alphabet then how many words having at least one vowel?

ہدایت جیل کے سوال دے ہے لفجونپر مشتمل ہیں

here/ bright/ pride/ stout

اگر ان لفجوں مے ہر حرف کو انگریجی حرف تہجیبی کے اگلے حرف سے بدلہ جائے تو صرف یک واول والے کتنے لفج ہونگے؟

A.एक
A.One
A.ایک

B.दोन
B.Two
B.دو

C.तीन
C.Three
C.تین

D.चार
D.Four
D.چار

Answer: D.चार
D.Four
D.چار

121 ताणतणावाचे प्रतिक आहे-

Reaction of stress is

کشیدگی کا ردعمل ہے

A.ताण
A.Stress
A.کشیدگی

B.न्युरोटिक एक्साईटी
B.Neurotic anxiety
B.نیوروٹک پریشانی

C.मानसिक ताण
C.Strain
C.کشیدگی

D.वेढ
D.Mania
D.انماد

Answer: C.मानसिक ताण
C.Strain
C.کشیدگی

122 सूचना: खालील प्रश्नांमध्ये दिलेल्या पर्यायांमधून संबंधित अक्षर/शब्द/संख्या निवडा.

व्यास : वर्तुळ :: कर्णरिषा : ?

DIRECTIONS: In the following question, select the related letter/word/number from the given alternatives.

Diameter : Circle :: Diagonal : ?

سمت: مندرجہ ذیل سوال میں، دیے گئے متبادل سے متعلقہ حرف/لفظ/نمبر منتخب کریں۔

نصف قطر : دائرہ :: وتر : ؟

A.बिंदू
A.Point
A.نقطہ

B.आयात
B.Rectangle
B.مستطیل

C.लंबवर्तुळ
C.Ellipse
C.بیضوی

D.गोलक
D.Sphere
D.کرہ

Answer: B.आयात
B.Rectangle
B.مستطیل

123 जेव्हा आपल्याला मेजवानीसाठी आमंत्रित केले जाते तेव्हा आपणास असे वाटते की-

When you are invited for a feast, then you have the idea that—

جب آپ کو ایک دعوت کے لئے مدعو کیا جاتا ہے تو آپ کو یہ خیال ہے کہ—

A.या प्रसंगी भेटवस्तू किंवा पैशांची भरपाई करण्यासाठी अन्न अपव्यय करा
A.Do wastage of food in order to pay the gift or money on the occasion
A.اس موقع پر تحفہ یا پیسہ ادا کرنے کے لئے کھانا ضائع کرو

B.बाहेर जेवणाची ही एक संधी आहे, त्यामुळे संपूर्ण कुटुंबा सह आनंद घ्या
B.It is an opportunity to take food outside home, therefore, enjoy it with whole family
B.یہ گھر سے باہر کھانا لینے کا موقع ہے، لہذا، پورے خاندان کے ساتھ لطف اندوز ہو

C.नातेसंबंध आणि ओढ यांच्या आधारे कुटुंबांनी अशा मेजवानीत सामील व्हावे
C.That families should join such parties on the basis of relations and affinity
C.اس خاندان کو تعلقات اور انحصار کی بنیاد پر اس طرح کے اجتماع میں شامل ہونا چاہئے

D.आपण घरी असो किंवा मेजवानीत असो अन्न कधीही वाया घालवू नये.
D.Never waste any food particle whether you are at home or in feast.
D.کھانے کا ایک ذرہ بھی ضائع نہ کریں کہ آپ گھر میں ہوں یا پارٹی میں.

Answer: C.नातेसंबंध आणि ओढ यांच्या आधारे कुटुंबांनी अशा मेजवानीत सामील व्हावे
C.That families should join such parties on the basis of relations and affinity
C.اس خاندان کو تعلقات اور انحصار کی بنیاد پر اس طرح کے اجتماع میں شامل ہونا چاہئے

124 उच्च न्यायालयामध्ये न्यायाधिशांची संख्या कोण ठरवतो?

Who decides number of judges in a High Court?

ہائی کورٹ میں ججوں کی تعداد کا فیصلہ کون کرتا ہے؟

A.भारताचे राष्ट्रपती
A.President of India
A. بھارت کے صدر

B.राज्याचे राज्यपाल
B.Governor of a State
B. کسی ریاست کے گورنر

C.उच्च न्यायालयाचे मुख्य न्यायाधीश
C.Chief justice of a High Court
C. ہائی کورٹ کے چیف جسٹس

D.मुख्यमंत्री
D.Chief Minister
D. وزیر اعلی

Answer: A.भारताचे राष्ट्रपती
A.President of India
A. بھارت کے صدر

125	सरळ रूप द्या: : 5290 + 17986 =? Simplify: 5290 + 17986 =? آسان بنائیں: 5290+17986= ?
	A.22000 A.22000 A.22000
	B.21000 B.21000 B.21000
	C.19000 C.19000 C.19000
	D.23276 D.23276 D.23276
Answer:	D.23276 D.23276 D.23276
126	खालील पैकी काय कॅमेऱ्यातील प्रतिमेचा शार्पनेस निश्चित करते? Which one of the following determines the sharpness of image in a camera? مندرجہ ذیل میں سے کونسی چیز ایک کیمرہ میں تصویر کے شارپنیس کا تعین کرتی ہے؟
	A.छिद्र A.Aperture A.اپرٹیور
	B.बाक B.Curve B.کرو
	C.भिंगाची फोकल लांबी C.Focal Length of Lens C.لینس کا فوکل لینتھ

D.कॅमेऱ्याचा आकार
D.Size of Camera
D.کیمرہ کا سائز

Answer: A.छिद्र
A.Aperture
A.اپرٹیور

127 अवकाशामध्ये नाही:

In space there is no:

خلا میں نہیں ہے:

A.पाणी
A.Water
A.پانی

B.जमीन
B.Land
B.زمین

C.हवा
C.Air
C.ہوا

D.वरीलपैकी सर्व
D.All of the above
D.مندرجہ بالا میں سے سب

Answer: D.वरीलपैकी सर्व
D.All of the above
D.مندرجہ بالا میں سے سب

128 खालीलपैकी सर्वांत लहान अपूर्णांक शोधा

Find the smallest of the following fractions

مندرجہ ذیل کسور میں سے سب سے چھوٹی کسر تلاش کریں

A.386/495
A.386/495
A.386/495

	B.28/93 B.28/93 B.28/93
	C.212/613 C.212/613 C.212/613
	D.2/5 D.2/5 D.2/5
Answer:	B.28/93 B.28/93 B.28/93

129	अनुक्रम: 9, 18, 27,..... चे 4थे पद शोधा Find the 4th term of the sequence: 9, 18, 27,..... 27 ,18 ,9 :؟اس سرج کیچوتھی ٹرم کیا ہے,.....
	A.40 A.40 A.40
	B.36 B.36 B.36
	C.41 C.41 C.41
	D.43 D.43 D.43
Answer:	B.36 B.36 B.36

130 सूचना: खालील माहिती काळजीपूर्वक वाचा आणि खाली दिलेल्या प्रश्नांची उत्तरे द्या.
A, B, C, D, E, F, G आणि H हे आठ मित्र एका गोलाकार टेबलभोवती मध्याभागाकडे बघत बसलेले आहेत. A हा D च्या डावीकडून दुसऱ्या जागेवर बसला आहे, जो E च्या डाव्या बाजूला तिसरा आहे. C हा G च्या उजवीकडील तिसऱ्या जागेवर बसला आहे, जो की E चा तत्काळ शेजारी नाही. H हा B च्या उजवीकडील तिसऱ्या जागेवर बसला आहे, जो G च्या उजवीकडे दुस-या जागेवर आहे.
E च्या उजवीकडून दुसरा कोण बसतो?

DIRECTIONS: Read the following information carefully and answer the questions that given below.
A, B, C, D, E, F, G and H are eight friends sitting around a circular table facing the centre. A sits second to the left of D, who is third to the left of E. C sits third to the right of G, who is not an immediate neighbour of E. H sits third to the right of B, who sits second to the right of G.
Who sits second to the right of E?

ہدایات: مندرجہ ذیل معلومات کو دھیان سے پڑھیں اور نیچے دیے گئے سوالوں کے جواب دیں۔
A، B، C، D، E، F، G اور H آٹھ دوست ہیں جو مرکز کا رخ کیے ہوئے ایک گول میز کے ارد گرد بیٹھے ہیں۔ A، D کے بائیں سے دوسرے پر بیٹھا ہے، جو E کے بائیں سے تیسرا ہے۔ C، G کے دائیں سے تیسرے پر بیٹھا ہے، جو E کے دائیں سے تیسرے نمبر پر بیٹھا ہے، جو G کے دائیں سے دوسری جگہ پر بیٹھا ہے۔ B، H کا فوری پڑوسی نہیں ہے۔
E کے دائیں طرف سے دوسرا کون بیٹھا ہے؟

A.B
A.B
A.B

B.F
B.F
B.F

C.G
C.G
C.G

D.C
D.C
D.C

Answer: B.F
B.F
B.F

131 चंद्रग्रहण घडते जेव्हा

Lunar eclipse occurs when the

اس وقت چاند میں گرہن لگتا ہے جب

A.सूर्य पृथ्वी आणि सूर्यादरम्यान येतो
A.Sun comes between the earth and the sun
A.سورج زمین اور سورج کے بیچ میں آجاتا ہے

B.चंद्र पृथ्वी आणि सूर्यादरम्यान येतो
B.Moon comes between the earth and sun
B.چاند زمین اور سورج کے بیچ میں آجاتا ہے

C.पृथ्वी चंद्र आणि सूर्य यांच्या दरम्यान येते
C.Earth comes between the moon and sun
C.زمین چاند اور سورج کے بیچ میں آجاتی ہے

D.जेव्हा पृथ्वी आणि चंद्र एकमेकांशी टकर मारतात
D.When earth and moon collide with each other
D.جب زمین اور چاند ایک دوسرے سے ٹکراتے ہیں

Answer: C.पृथ्वी चंद्र आणि सूर्य यांच्या दरम्यान येते
C.Earth comes between the moon and sun
C.زمین چاند اور سورج کے بیچ میں آجاتی ہے

132

सूचना: खालील प्रश्नात असे 3 घटक आहेत ज्यांचा परस्परांशी विशिष्ट संबंध आहे. समान संबंध वर्तुळाच्या संचांनी दर्शविलेला आहे, प्रत्येक वर्तुळ त्याचा आकार कितीही असला तरी, एका घटकाचे प्रतिनिधित्व करते.योग्य वर्तुळाच्या संचांशी खालील घटकांच्या जोड्या लावा.

DIRECTION: The question below has three items having certain relationship among them. The same relationship is expressed by sets of circles, each circle representing one item irrespective of its size. Match the items with right set of circles.

ہدایت: مندرجہ ذیل سوال میں تین آئٹم ہیں جن کے مابین مختلف تعلقات ہیں۔ دائروں کے ایک سیٹ کے ذریعہ یکساں تعلق ظاہر کیا جاتا ہے، ہر دائرہ سائز سے قطع نظر ایک آئٹم کی نمائندگی کرتا ہے۔ آئٹم کو دائروں کے درست سیٹ کے ساتھ ملائیں۔

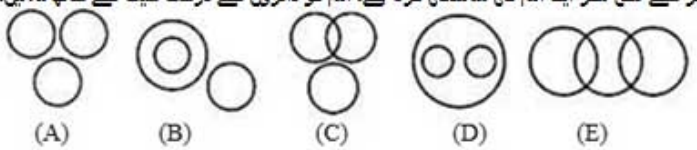

मुली, निरोगी, आगगाड्या
Girls, Healthy, Trains
لڑکیاں، صحتمند، ٹرین

A. (A)

B. (B)

C. (C)

D. (D)

Answer: C. (C)

133 सूचना: खाली दिलेल्या विधान (A) आणि कारण (R) साठी, खालील पैकी योग्य पर्याय निवडा:

विधान (A): लोखंडाचा तुकडा पाण्यात बुडतो आणि पाऱ्यामध्ये तरंगतो.
कारण (R): पाण्याची घनता लोह आणि पाऱ्याच्या घनते पेक्षा अधिक आहे.

DIRECTION: For the Assertion (A) and Reason (R) given below, choose the correct alternative from the following:

Assertion (A): Chunk of iron sinks in water and floats in mercury.
Reason (R): Density of water is more than density of iron and mercury.

ہدایت: نیچے دئیے گئے اسرشن (A) اور (R) کے لئے، مندرجہ ذیل میں سے صحیح متبادل منتخب کریں:

اسرشن (A): لوہے کا ٹکڑا پانی میں ڈوب جاتا ہے اور پارے میں تیرتا ہے۔
وجہ (R): پانی کی کثافت لوہے اور پارے کی کثافت سے زیادہ ہے۔

A.दोन्ही (A) आणि (R) सत्य आहेत आणि (R) (A) च योग्य स्पष्टीकरण आहे
A.Both (A) and (R) are true and (R) is the correct explanation of (A)
A. (A) اور (R) دونوں صحیح ہیں اور (R) (A) کی درست وضاحت ہے

B.दोन्ही (A) आणि (R) खरे आहेत, परंतु (R) (A) च योग्य स्पष्टीकरण नाही
B.Both (A) and (R) are true, but (R) is not the correct explanation of (A)
B. (A) اور (R) دونوں صحیح ہیں، لیکن (R) (A) کی درست وضاحت نہیں ہے

C.(A) सत्य आहे, परंतु (R) खोटे आहे.
C.(A) is true, but (R) is false
C. (A) صحیح ہے، لیکن (R) غلط ہے

D.(A) खोटे आहे, परंतु (R) सत्य आहे
D.(A) is false, but (R) is true
D. (A) غلط ہے، لیکن (R) صحیح ہے

Answer: C.(A) सत्य आहे, परंतु (R) खोटे आहे.
C.(A) is true, but (R) is false
C. (A) صحیح ہے، لیکن (R) غلط ہے

134 कमीतकमी भावना दर्शवणारी व्यक्ती जे बहुतेक लोक सोल म्हणून दाखवितात-

A person showing less feelings that most people do as saul to be showing

ایک ایسے شخص کو کم جذبات دکھا رہا ہے جو زیادہ تر لوگوں کو دکھایا جا سکتا ہے

A.अलोगिया
A.Alogia
A.اليوجيا

B.अनोलिटेशन
B.Anolition
B.انوشن

C.फटकळ प्रभाव
C.Blunted effect
C. بلاکس اثر

D.सामाजिक माघार
D.Social withdrawal
D.سماجی واپسی

Answer: C.फटकळ प्रभाव
C.Blunted effect
C. بلاکس اثر

135 53/25 हे टक्केवारीत मांडा.

Express 53/25 into percentage?

53/25کو فیصد میں ظاہر کرینگے

A.12%

A.12%

A.12%

B.112%

B.112%

B.112%

C.212%

C.212%

C.212%

D.312%

D.312%

D.312%

Answer: C.212%

C.212%

C.212%

136 a, b, c हे सर्व धन असतील, तर $x= y^a, y= z^b, z= x^c$ असताना abc चे मूल्य काढा:

If a,b and c are all positive, find the value of abc if $x= y^a, y= z^b, z= x^c$:

اگر a, b, c تمام مثبت ہوں تو abcکی قیمت معلوم کریں جبکہ $x= y^a, y= z^b, z= x^c$=

A.4
A.4
A.4

B.3
B.3
B.3

C.1
C.1
C.1

D.2
D.2
D.2

Answer: C.1
C.1
C.1

137	रामसार साईट म्हणजे: A Ramsar Site means: ایک رامسر سائٹ کا مطلب ہے:
	A.पाणथळ जागा A.A wetland A. ایک دلدلی زمین
	B.जंगल B.A forest B. ایک جنگل
	C.पर्वत C.A mountain C. ایک پہاڑ
	D.देव D.God D. خدا
Answer:	A.पाणथळ जागा A.A wetland A. ایک دلدلی زمین
138	सूचना: दिलेल्या पर्यायांमधून वेगळे ते बाहेर काढा. DIRECTIONS: Find the odd one out from the given alternatives. سمت: دیے گئے متبادل میں سے بے جوڑ کو تلاش کرو۔
	A.पलटण A.Regiment A.فوجی دستہ
	B.लेफ्टनंट B.Lieutenant B.لیفٹننٹ
	C.कर्नल C.Colonel C.کرنل
	D.मेजर D.Major D.میجر

Answer: A.पलटण
A.Regiment
A.فوجی دستہ

139 **सूचना:** दिलेल्या पर्यायांमधून श्रेणी पूर्ण करणारी योग्य आकृती निवडा.

DIRECTIONS: Complete the series by choosing right figure from the given choices.

ہدایات: دیئے گئے اختیارات میں صحیح شکل کا انتخاب کر کے سیریز کو مکمل کیجیئے۔

Problem Figures

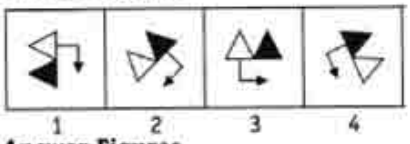

Answer Figures

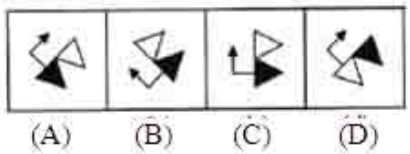

A. (A)

B. (B)

C. (C)

D. (D)

Answer: A. (A)

140 वचनबद्धता, चिकाटी, संयम, कष्ट, दक्षता उद्देशाला धरून वर्तन आहे

Commitment, persistence, patience, hard work, vigilance and goal directed behavior is

جذبہ، اصرار، ثبات قدمی، محنت، چوکسی اور ہدف مائل سلوک _____ کہلا تا ہے:

A.भावनात्मक कौशल्य
A.Emotional competence
A.جذباتی استعداد

B.बोधात्मक क्षमता
B.Cognitive capacity
B.وجدانی کیفیت

C.सामाजिक कौशल्य
C.Social competence
C.سماجی استعداد

D.उद्योजक कौशल्य
D.Entrepreneurial competence
D.سرماکارانہ استعداد

Answer: D.उद्योजक कौशल्य
D.Entrepreneurial competence
D.سرماکارانہ استعداد

141 पियाजेच्या आधी लोकांचा असा विश्वास असण्याची शक्यता होती की मुलांचे मन हे प्रौढांच्या मनाची लहान प्रतिकृती आहे

Before Piaget people were more likely to believe that the child's mind is a miniature model of the adults

پیگیٹ سے قبل لوگوں کا یہی ماننا تھا کہ بچہ کا ذہن بالغوں کی ایک چھوٹی شکل ہوتی ہے

A.खरे
A.true
A.صحیح

B.खोटे
B.false
B.غلط

C.निश्चित माहित नाही
C.not sure
C.یقین نہیں ہے

D.a किंवा b दोन्हीही नाही
D. neither a or b
D.نہ a اور نہ b ہی

Answer: A.खरे
A.true
A.صحیح

142 सूचना: खालील माहिती काळजीपूर्वक वाचा आणि खाली दिलेल्या प्रश्नांची उत्तरे द्या.
A, B, C, D, E, F, G आणि H हे आठ मित्र एका गोलाकार टेबलभोवती मध्याभागाकडे बघत बसलेले आहेत. A हा D च्या डावीकडून दुसऱ्या जागेवर बसला आहे, जो E च्या डाव्या बाजूला तिसरा आहे. C हा G च्या उजवीकडील तिसऱ्या जागेवर बसला आहे, जो की E चा तत्काळ शेजारी नाही. H हा B च्या उजवीकडील तिसऱ्या जागेवर बसला आहे, जो G च्या उजवीकडे दुस-या जागेवर आहे.
D आणि C च्या मध्ये कोण बसला आहे?

DIRECTIONS: Read the following information carefully and answer the questions that given below.
A, B, C, D, E, F, G and H are eight friends sitting around a circular table facing the centre. A sits second to the left of D, who is third to the left of E. C sits third to the right of G, who is not an immediate neighbour of E. H sits third to the right of B, who sits second to the right of G.
Who sits between D and C?

ہدایات: مندرجہ ذیل معلومات کو دھیان سے پڑھیں اور نیچے دیے گئے سوالوں کے جواب دیں۔
A، B، C، D، E، F، G اور H آٹھ دوست ہیں جو مرکز کا رخ کیے ہوئے ایک گول میز کے ارد گرد بیٹھے ہیں۔ A، D کے بائیں سے دوسرے پر بیٹھا ہے، جو E کے بائیں سے تیسرا ہے۔ C، G کے دائیں سے تیسرے پر بیٹھا ہے، جو E کا فوری پڑوسی نہیں ہے۔ H، B کے دائیں سے دوسری جگہ پر بیٹھا ہے۔ G کے دائیں طرف تیسرے نمبر پر بیٹھا ہے، جو
D اور C کے درمیان کون بیٹھا ہے؟

A.केवळ B
A.Only B
A.صرف B

B.केवळ C आणि A
B.Only C and A
B.صرف C اور A

C.केवळ C
C.Only C
C.صرف C

D.केवळ E
D.Only E
D.صرف E

Answer: A.केवळ B
A.Only B
A.صرف B

143

सूचना: दिलेल्या चारांपैकी वेगळी (असंबद्ध) असणारी आकृती शोधून काढा.

DIRECTIONS: From the odd from the given four figures.

ہدایات: دیئے گئے چار شکلوں میں سے طاق شکل کونسی ہے؟

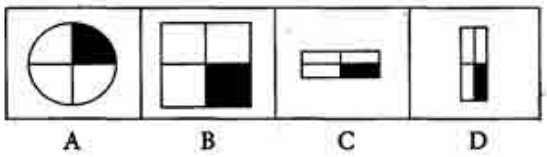

A. (A)

B. (B)

C. (C)

D. (D)

Answer: A. (A)

144

सूचना: खालील दिलेल्या आकृतीचा अभ्यास करा आणि प्रश्नाचे उत्तर द्या.

DIRECTIONS: Study the diagram given below and answer the question.

ہدایات: ذیل دیئے گئے ڈایاگرام کا مطالعہ کریں اور سوال کا جواب دیں.

कोणता भाग पदवीधर असलेले आणि सरकारी नोकरी असलेले क्लार्क दर्शवतो?

Which part represents those clerks who are graduates and have government job?

کون سا حصہ ان کلیرکوں کی نمائندگی کرتا ہے جو گریجویٹ ہیں اور سرکاری ملازمت رکھتے ہیں؟

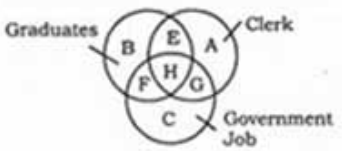

A. E

B. H

C. G

D. F

Answer: B. H

145 निवारा बांधणे असे दर्शवते की प्राणी आहेत

Shelters are built, which denotes that animals are

پناہ گاہوں کی تعمیر سے معلوم ہوتا ہے کہ جانور

A.दुष्ट
A.Curial
A.گھبرائے ہوئے ہیں

B.लाजाळू
B.Shy
B.شرمیلے ہیں

C.समाजशील
C.Social
C.سماجی ہیں

D.उदास
D.Nervous
D.اعصابی ہیں

Answer: C.समाजशील
C.Social
C.سماجی ہیں

146 सूचना: दिलेल्या पर्यायांमधून वेगळे ते बाहेर काढा.

DIRECTIONS: Find the odd one out from the given alternatives.

سمت: دیے گئے متبادل میں سے بے جوڑ کو تلاش کرو۔

A.PUB
A.PUB
A.PUB

B.TUB
B.TUB
B.TUB

C.CUB
C.CUB
C.CUB

D.BUS
D.BUS
D.BUS

Answer: D.BUS
D.BUS
D.BUS

147 प्रथम बालवाडी ह्यांच्या द्वारे सुरू करण्यात आली

The first Kindergarten was started by—

پہلا کنڈرگارٹن شروع کیا تھا—

A.रेडरीक फॉबेल
A.Friedrich Froebel
A.فریڈرچ فروبل

B.बेंजामिन फ्रँकलीन
B.Benjamin Franklin
B.بنیجمین فرینکلن

C.जोहान पेस्टोलेझझी
C.Johann Pestalozzi
C.جوہان پیسٹالوزی

D. डी विल्ट क्लिंटन
D.De Wilt Clinton
D.ڈی ویلٹ کلینٹن

Answer: A.रेडरीक फॉबेल
A.Friedrich Froebel
A.فریڈرچ فروبل

148 एखाद्या विद्यार्थ्याने महाविद्यालयात जाण्यासाठी प्रोत्साहन दिले पाहिजे जर-

A pupil should definitely be encouraged to go to college if—

ایک طالب علم کو یقینی طور پر کالج جانے کے لئے حوصلہ افزائی کی جانی چاہیئے-

A.तो सरासरी बुद्धिमत्तेपेक्षा श्रेष्ठ आहे
A.He has better than the average intelligence
A.وہ اوسط ذہانت سے بہتر ذہانت رکھتا ہے

B.त्याच्या कडे आर्थिक आधार आहे
B.He has financial backing to see him through
B.اس کے پاس اسے دیکھنے کے لئے مالی امداد ہے

C.त्यांनी हायस्कुल ग्रॅज्युएशनच्या गरजा भागवल्या आहेत
C.He has met highschool graduation requirements
C.اس نے ہائی اسکول کے گریجویشن کی ضروریات پوری کر لی ہیں

D.वरील सर्व सत्य आहेत आणि त्याला जाण्याची इच्छा आहे
D.All the above are true and he wishes to go.
D.مذکورہ تمام سچ ہے اور وہ جانا چاہتا ہے.

Answer: D.वरील सर्व सत्य आहेत आणि त्याला जाण्याची इच्छा आहे
D.All the above are true and he wishes to go.
D.مذکورہ تمام سچ ہے اور وہ جانا چاہتا ہے.

149 सूचना: प्रत्येक प्रश्नाला एक प्रमुख विधानासोबत चार विधाने आहेत ज्यांच्याखाली A, B, C आणि D असे चार विधान आहेत. क्रमवार विधानांची जोडी निवडा ज्यामध्ये प्रथम विधान दुसऱ्या विधानाला सुचवते, आणि दोन्ही विधाने तर्किकदृष्ट्या प्रमुख विधानासोबत निगडित असेल.

जर पोलिसांनी तपास केला, तर गुन्हेगार पकडले जातील
A. पोलिसांनी या प्रकरणाचा तपास केली
B. पोलिसांनी या प्रकरणाचा तपास केला नाही
C. गुन्हेगार पकडले गेले
D. गुन्हेगार पकडले गेले नाहीत

DIRECTIONS: Each question has a main statement followed by four statements labelled A, B, C and D. Choose the ordered pair of statements, where the first statement implies the second, and the two statements are logically consistent with the main statement.

If police carry out the investigation ,the culprit will be caught
A. police carried out the investigation
B. police did not carry out the investigation
C. the culprit was caught
D. the culprit was not caught

ہدایت: ہر سوال میں ایک جملہ ہے جسکے بعد چار جملےاے، بی،سی اور ڈی کے نام سے دئے گئے ہیں اسمیں منسلک جوڑیوں کو چنئے۔ جہاں پہلا جملہ دوسرے جملہ کی اور اشارہ کر رہا ہے اور دو جملے منطقی مرکزی بیان کے مطابق ہیں

اگر پولیس تفتیش کرے تو مجرم پکڑا جائے گا
A۔ پولیس نے تفتیش کی
B۔ پولیس نے تفتیش نہیں کی
C۔ مجرم پکڑا گیا
D۔ مجرم نہیں پکڑا گیا

A.AC
A.AC
A.AC

B.BC
B.BC
B.BC

C.DA
C.DA
C.DA

D.CD
D.CD
D.CD

Answer: A.AC
A.AC
A.AC

150 सूचना: दिलेल्या पर्यायांमधून वेगळे ते बाहेर काढा.

DIRECTIONS: Find the odd one out from the given alternatives.

سمت: دیے گئے متبادل میں سے بے جوڑ کو تلاش کرو۔

A.104
A.104
A.104

B.111
B.111
B.111

C.108
C.108
C.108

D.112
D.112
D.112

Answer: B.111
B.111
B.111

151 विज्ञान म्हणून शिक्षणाचा प्रचार करणे ही सर्वोत्तम सेवा आहे त्याच्या संशोधनाचे मोठे बोध आहे

The promotion of teaching as a science is best served by orientation of its research towards a greater understanding of—

سائنس کے طور پر تعلیم دینے کے فروغ کو بہتر سمجھا جاتا ہے—

A.वर्तणूक आणि त्याच्या मूलभूत आधार
A.Behaviour and its underlying basis
A.رویہ اور اس کی بنیادی بنیادیں

B.समायोजन संबंधात अंतस्रावीका
B.Endocrinology in relation to adjustment
B.ایڈجسٹمنٹ کے سلسلے میں اینڈوسکرنولوجی

C.आनुवंशिकता आणि पर्यावरणाचा प्रभाव
C.The influence of heredity and environment
C.وراثت اور ماحول کا اثر

D.शैक्षणिक वाढीतील घटक
D.The factors underlying academic growth
D.عوامل تعلیمی ترقی کے بنیادی عناصر

Answer: A.वर्तणूक आणि त्याच्या मूलभूत आधार
A.Behaviour and its underlying basis
A.رویہ اور اس کی بنیادی بنیادیں

152 सूचना: दिलेल्या पर्यायांमधून वेगळे ते बाहेर काढा.

DIRECTIONS: Find the odd one out from the given alternatives.

سمت: دیے گئے متبادل میں سے بے جوڑ کو تلاش کرو۔

A.रोल
A.ROLE
A.ROLE

B.बॉल
B.BALL
B.BALL

C.कॉल
C.CALL
C.CALL

D.मॉल
D.MALL
D.MALL

Answer: A.रोल
A.ROLE
A.ROLE

153 वंगण तेल वाहनामध्ये वापरले जाते —

Lubricant oil is used in vehicle to —

_____ کے لئے گاڑی میں لیبریکینٹ تیل کا استعمال کیا جاتا ہے۔

A.इंधन ज्वलनासाठी
A.For combustion fuel
A.کمبشن ایندھن کے لئے

B.प्रवाह सुरळीत करण्यासाठी
B.To make flow streamline
B.اسٹریم لائن کو فلو بنانے کے لئے

C.घर्षण वाढवण्यासाठी
C.To increase the friction
C.رگڑ کو بڑھانے کے لئے

D.घर्षण कमी करण्यासाठी
D.To decrease the friction
D.رگڑ کو گھٹانے کے لئے

Answer: D.घर्षण कमी करण्यासाठी
D.To decrease the friction
D.رگڑ کو گھٹانے کے لئے

154 1260÷14 = ?

1260÷14 = ?

1260÷14=?

A.90
A.90
A.90

	B.88 B.88 B.88
	C.81 C.81 C.81
	D.92 D.92 D.92
Answer:	A.90 A.90 A.90

155	मनोजन्य क्षुधानाश, खाल्लेले उलटवण्याचा विकार , अती खाणे हे प्रकार याचे आहेत: Anorexia Nervosa, Bulimia Nervosa, Binge eating are all types of: اینو ریکسیا نروسا، بیو لیمیا نروسا، بے ہنگم کھانا یہ سب صورتیں ہیں:
	A.खाण्याचे विकार A.Eating disorders A.کھانے پینے میں بے ضابطگیاں
	B.मन:स्थितीचे विकार B.Mood disorders B.موڈ میں بے ضابطگیاں
	C.झाड फुंक C.Exorcism C.جھاڑ پھونک
	D.मानसिक दुर्बलता D.Mental retardation D. دماغی خسارہ
Answer:	A.खाण्याचे विकार A.Eating disorders A.کھانے پینے میں بے ضابطگیاں

156 DIRECTIONS: A sentence with an underlined phrasal verb is given below. Out of the four options, choose the one which can be substituted for the given phrasal Verb.
The factory had to lay off some workers.

A.appoint

B.praise

C.dismiss

D.reward

Answer: C.dismiss

157 जर मोहल्लासमितीने परिसरात हात पाईपच्या दुरुस्त्यासाठी काही पैसे देण्यास सांगितले, तर तुम्ही काय कराल?

When the Mohalla Samiti asks to donate some money for the repairing works of Hand pipe in the vicinity, then what will you do?

جب محلہ سمتی ارد گرد کے علاقے میں ہینڈ پائپ کی مرمت کے کاموں کے لئے آپ سے کچھ پیسہ عطیہ کرنے کا کہتا ہے، تو آپ کیا کریں گے؟

A.आपण योगदान देणार नाही कारण त्याची आपल्यासाठी उपयुक्तता नाही
A.You will not contribute as it has no utility for you
A.آپ کو اس کی شراکت نہیں کریں گے کیونکہ آپ کے لئے اس میں کوئی فائدہ نہیں ہے

B.आपण आपल्या इच्छेप्रमाणे निःस्वार्थपणे योगदान देऊ
B.You will contribute according to your will in a selfless manner
B.آپ اپنی مرضی کے مطابق خود مختار انداز میں شراکت کریں گے

C.समिती आणि त्याच्या संकलनात आपणास दोष काढू
C.You will find faults in the samiti and its collections.
C.آپ سمتی اور اس کے مجموعوں میں غلطیاں دیکھیں گے.

D.आपण भविष्यात पैसे ना मागण्यासाठी बोलू व काही पैसे देऊ
D.You will pay some money in order to warn them not to pay visit in future.
D.آپ ان کو مستقبل میں دوبارہ آنے سے خبردار کرنے کے لئے کچھ پیسے ادا کریں گے.

Answer: B.आपण आपल्या इच्छेप्रमाणे निःस्वार्थपणे योगदान देऊ
B.You will contribute according to your will in a selfless manner
B.آپ اپنی مرضی کے مطابق خود مختار انداز میں شراکت کریں گے

158 सियोल _____ ची राजधानी आहे –

Seoul is the capital of -

سیئول راجدھانی ہے :

A.उत्तर कोरिया
A.North Korea
A.شمالی کوریہ

B.दक्षिण कोरिया
B.South Korea
B.جنوبی کوریہ

C.थायलँड
C.Thailand
C. تھائیلینڈ

D.म्यानमार
D.Myanmar
D.میانمار

Answer: B.दक्षिण कोरिया
B.South Korea
B.جنوبی کوریہ

159 _____हे याचे प्रमुख कारण आहे

_____ is the leading cause of

_____ کی سب سے بڑی وجہ ہوتی ہے

A.वारशाने मिळालेली स्वभाववैशिष्ट्ये
A.Inherited traits
A.موروثی خصوصیات

B.मातेने गर्भावस्थेत मद्याचे सेवन केल्यास उद्भवणाऱ्या मानसिक व शारीरिक समस्या
B.Fetal alcohol syndrome
B.جنین الکحل سنڈروم

C.वातावरणीय घटक
C.Environmental factor
C.ماحولیاتی عناصر

D.यांपैकी कोणतीही नाही
D.None of these
D.ان میں سے کوئی نہیں

Answer:	A.वारशाने मिळालेली स्वभाववैशिष्ट्ये A.Inherited traits A.موروثی خصوصیات

160	$3^3 \times 9^6 = 3^?$ $3^3 \times 9^6 = 3^?$ $3^3 \times 9^6 = 3^?$
	A.15 A.15 A.15
	B.91 B.91 B.91
	C.70 C.70 C.70
	D.14 D.14 D.14
Answer:	A.15 A.15 A.15

161	खालीलपैकी शुद्ध शब्द कोणता ?
	A.कामचुकार
	B.कामाचुकर
	C.कामाचुकार
	D.कामचूकार
Answer:	A.कामचुकार

162	व्यावसायिक क्षेत्र यात्रे वर जाताना विद्यार्थ्यांनी In making occupational fieldtrips, the pupils should— پیشہ ورانہ فیلڈ ٹرک بنانے میں، طالب علموں کو
	A.शिक्षकाच्या बरोबर राहावे A.Be accompanied by the teacher at all times A.ہر وقت استاد کے ساتھ رہیں
	B.त्यांच्या मार्गदर्शनासाठी प्रश्न विचारण्यास तयार राहावे B.Be prepared to ask questions from their guide B.اپنے گائیڈ سے سوالات پوچھنے کے لئے تیار رہیں
	C.शाळेत परत आल्यावर यात्रा वषयी चर्चा करणे C.Discuss their visits upon returning to school C.اسکول واپس آنے پر ان کے دورے کے بارے میں گفتگو کریں
	D.वरील सर्व D.All the above. D.مذکورہ تمام.
Answer:	D.वरील सर्व D.All the above. D.مذکورہ تمام.

163 सूचना: प्रत्येक प्रश्नाला एक प्रमुख विधानासोबत चार विधाने आहेत ज्यांच्याखाली A, B, C आणि D असे चार विधान आहेत. क्रमवार विधानांची जोडी निवडा ज्यामध्ये प्रथम विधान दुसऱ्या विधानाला सुचवते, आणि दोन्ही विधाने तर्किकदृष्ट्या प्रमुख विधानासोबत निगडित असेल.

ब्रुकलिन ब्रिज एकतर लंडनमध्ये आहे किंवा न्यूयॉर्कमध्ये आहे.
A. ब्रुकलिन ब्रिज लंडनमध्ये आहे.
B. ब्रुकलिन ब्रिज लंडनमध्ये नाही.
C. ब्रुकलिन ब्रिज न्यूयॉर्कमध्ये आहे.
D. ब्रूकलिन ब्रिज न्यूयॉर्कमध्ये नाही.

DIRECTIONS: Each question has a main statement followed by four statements labelled A, B, C and D. Choose the ordered pair of statements, where the first statement implies the second, and the two statements are logically consistent with the main statement.

The Brooklyn bridge is either in London or New york
A.The Brooklyn bridge is in London
B.The Brooklyn bridge is not in London
C.The Brooklyn bridge is in New York
D.The Brooklyn bridge is not in New York

ہدایت: ہر سوال میں ایک جملہ ہے جسکے بعد چار جملےاے، بی،سی اور ڈی کے نام سے دئے گئے ہیں اسمیں منسلک جوڑیوں کو چنئے۔ جہاں پہلا جملہ دوسرے جملہ کی اور اشارہ کر رہا ہے اور دو جملے منطقی مرکزی بیان کے مطابق ہیں

بروکلین برج یا لندن میں ہے یا نیو یارک میں
Aبروکلین برج لندن میں ہے ۔
Bبروکلین برج لندن میں نہیں ہے ۔
Cبروکلین برج نیویارک میں ہے ۔
Dبروکلین برج نیویارک میں نہیں ہے ۔

A.AD
A.AD
A.AD

B.BC
B.BC
B.BC

C.BD
C.BD
C.BD

D.AB
D.AB
D.AB

Answer: B.BC
B.BC
B.BC

164 यापैकी कोणती आकृती कुटुंब, मुलं, आणि मुली दर्शवते?

Which one of the following figure represents family, sons and daughters?

مندرجہ ذیل تصاویر میں سے کون سی ایک خاندان، بیٹوں اور بیٹیوں کی نمائندگی کرتی ہے؟

(A) 

(B) 

(C) 

(D) 

Answer: (C) 

165 एका घनाला रंगवून किमान शक्य संख्येचे काप करून 60 लहान पण एकसारख्या तुकड्यांमध्ये कापले गेले आहे. तंतोतंतपणे रंगवलेले तीन चेहरे असलेले किती लहान तुकडे आहेत?

A cube is painted and cut into 60 smaller but identical pieces by making the minimum possible number of cuts.
How many smaller pieces have exactly three painted faces?

ایک کیوب کو ایک جیسے 60 ٹکڑوں میں رنگ دے کر کاٹا گیا ہے۔ کم سے کم ممکن کٹ لگاتے ہو,ئے، تو کتنے حتمی چھوٹے ٹکڑے ہوں گے جن کے 3 منہ رنگین ہوں گے؟

A.12
A.12
A.12

B.8
B.8
B.8

C.36
C.36
C.36

D.24
D.24
D.24

Answer: B.8
B.8
B.8

166 सूचना: खाली दिलेल्या प्रश्नात एक विधान आहे ज्याचे I आणि II असे दोन निष्कर्ष त्याखाली अंकित केलेले आहेत. या आधारे सर्वात योग्य पर्याय निवडा.

विधान:
वृत्तपत्रातील एका जाहिरातीमधून – X गाडी ही बाजारात उपलब्ध असलेली सर्वात वेगवान गाडी आहे.

निष्कर्ष:
I. लोकांना वेगवान गाड्या आवडतात.
II. वेगवान गाड्या चालवणारी माणसे मासिकापेक्षा वर्तमानपत्र वाचणे उचित मानतात.

DIRECTIONS: The question below has a statement followed by two conclusions numbered I and II. Based on this choose the option that is most suitable.

Statement:
From an advertisement in newspaper - Car X is the fastest car available in the market.

Conclusions:
I. People like fast cars.
II. People driving fast cars prefer newspapers over magazines.

ہدایات: نیچے دیے گئے سوال میں ایک بیان کے بعد دو نتائج II اور I دیے گئے ہیں۔ اس کی بنیاد پرانتہائی موزوں آپشن کا انتخاب کیجیے۔

بیان:
مارکیٹ میں موجود تیز ترین کار ہے X اخبار میں ایک اشتہار سے - کار.

نتیجے:
I. لوگوں کو تیز رفتار کاریں پسند ہیں.
II. تیز رفتار کاریں چلانے والے لوگ میگزینز کے مقابلے میں اخباروں کو ترجیح دیتے ہیں.

A.केवळ निष्कर्ष क्रमांक I विधानास अनुसरून आहे
A.Only Conclusion I follows
A.صرف نتیجہ I لاگو ہو گا۔

B.केवळ निष्कर्ष क्रमांक II विधानास अनुसरून आहे
B.Only Conclusions II follows
B.صرف نتیجہ II لاگو ہو گا۔

C.निष्कर्ष क्रमांक I किंवा II अनुसरून आहे.
C.Either I or II follows
C. I یا II میں سے ایک لاگو ہو گا۔

D.कोणताही निष्कर्ष अनुसरून नाही
D.Neither I nor II follow
D. I اور II میں سے کوئی بھی لاگو نہیں ہو گا۔

Answer: A.केवळ निष्कर्ष क्रमांक I विधानास अनुसरून आहे
A.Only Conclusion I follows
A.صرف نتیجہ I لاگو ہو گا۔

167 त्रिकोणाची रुंदी 10 सेंमी आणि त्याचे क्षेत्रफळ 130 सेंमी2 आहे. त्रिकोणाची लांबी ही 7 सेंमी ने वाढवली. नवीन परिमिती काय असेल?

The width of a rectangle is 10 cm and its area is 130 cm^2. The length of the rectangle is increased by 7 cm. What is its new perimeter?

ایک مستطیل کا عرض 10 سینٹی میٹر ہے اور اسکا رقبہ 130 مربع سینٹی میٹر ہے۔ مستطیل کی لمبائی 7 سینٹی میٹر بڑھ جاتی ہے۔ نیا احاطہ کیا ہوگا؟

A.70 सेंमी
A.70 cm
A.70 سینٹی میٹر

B.64 सेंमी
B.64 cm
B.64 سینٹی میٹر

C.80 सेंमी
C.80 cm
C.80 سینٹی میٹر

D.60 सेंमी
D.60 cm
D.60 سینٹی میٹر

Answer: D.60 सेंमी
D.60 cm
D.60 سینٹی میٹر

168 जर वर्गातील विद्यार्थ्यांना 6, 8, 12 किंवा 16 विद्यार्थ्यांच्या ओळींमध्ये बसलवले, कोणताही विद्यार्थी मागे राहिला नाही. तर वर्गामधील विद्यार्थ्यांची संभाव्य संख्या?

If the students of a class are arranged in rows of 6, 8, 12 or 16 students, no students is left behind. Then the possible number of students in the class is?

اگر ایک کلاس کے طلباء 6، 8، 12 یا 16 طالب علموں کے قطار میں ترتیب دیئے گئے ہیں ، کوئی طالب علم پیچھے نہیں چھوڑا گیا۔ کلاس میں طلباء کی ممکنہ تعداد کیا ہے؟

A.60
A.60
A.60

B.72
B.72
B.72

C.80
C.80
C.80

D.96
D.96
D.96

Answer: D.96
D.96
D.96

169 DIRECTIONS: A sentence with an underlined word is given below. Find the word which is opposite in meaning to the underlined word from the given options.
It's always <u>prudent</u> to read a contract carefully before signing it.

A.Unwise

B.Wise

C.Advisable

D.Sensible

Answer: A.Unwise

170	प्रश्नासाठी सूचना: खालील मालिका पूर्ण करा. KJAM, GGWJ, ____, YAOD, UXKA DIRECTION: Complete the following series. KJAM, GGWJ, ____, YAOD, UXKA سوال کے لیے ہدایت:مندرجہ ذیل سیریز کو مکمل کریں۔ KJAM, GGWJ, ____, YAOD, UXKA
	A.CDUI A.CDUI A.CDUI
	B.DFTC B.DFTC B.DFTC
	C.DCTF C.DCTF C.DCTF
	D.CDSG D.CDSG D.CDSG
Answer:	D.CDSG D.CDSG D.CDSG

171	दुसऱ्यावर उपकार करणारा -
	A.देव
	B.पुजारी
	C.परोपकारी
	D.परिचारक
Answer:	C.परोपकारी

172 ‘तातडी’ या शब्दाचा विरुद्धार्थी शब्द कोणता ?

A.त्वरा

B.विलंब

C.लगबग

D.घाई

Answer: B.विलंब

173 जर रुग्णालयाला गुरुद्वारा म्हटले, गुरुद्वा-याला रेल्वे स्थानक म्हटले, रेल्वे स्थानकाला बस स्थानक म्हटले, आणि बस स्थानकाला नदी म्हटले. तर आपण पूजेसाठी कुठे गेले पाहिजे?

If hospital is called gurudwara, gurudwara is called railway station, railway station is called bus stand and bus stand is called river. Where we should go for worship?

اگر ہسپتال کو گرودوارہ، گرودوارہ کو ریلوے اسٹیشن، ریلوے اسٹیشن کو بس اسٹاپ اور بس اسٹاپ کو ندی کہا جائے تو ہمیں عبادت کے لئے کہاں جانا چاہئے؟

A.गुरुद्वारा
A.Gurudwara
A.گرودوارہ

B.रेल्वे स्थानक
B.Railway Station
B.ریلوے اسٹیشن

C.बस स्थानक
C.Bus Stand
C.بس اسٹاپ

D.रूग्णालय
D.Hospital
D.ہسپتال

Answer: B.रेल्वे स्थानक
B.Railway Station
B.ریلوے اسٹیشن

174

$$\sqrt{14.44} = ?$$

	A. 2.9
	B. 0.029
	C. 0.29
	D. 3.8
Answer:	D. 3.8

175	Choose the word which is opposite in meaning to the given word. ASSIST
	A.Hinder
	B.Aid
	C.Encourage
	D.Help
Answer:	A.Hinder

176	Out of the four alternatives, choose the one which can be substituted for the given words/sentence. To run away secretly in order to get married
	A.Elope
	B.Wedding
	C.Alimony
	D.Martyr
Answer:	A.Elope

177	गॅल्वनाइजेशन प्रक्रियेमध्ये, लोहाला याचे आवरण दिले जाते: In galvanization process, Iron is coated with: ملمع سازی عمل میں، لوہا پر _____ کا تہہ چڑھایا جاتا ہے۔

A.टिन
A.Tin
A.ٹن

B.अल्युमिनियम
B.Aluminium
B.الومونیم

C.झिंक
C.Zinc
C.زنک

D.एशियन पेंट
D.Asian Pain
D.ایشین پین

Answer: C.झिंक
C.Zinc
C.زنک

178 'शुचिर्भूत' या शब्दाचा विरुद्धार्थी शब्द कोणता ?

A.अपवित्र

B.शुद्ध

C.पवित्र

D.मंगल

Answer: A.अपवित्र

179 मानसिक वयाच्या कालक्रमानुसारी वयाशी असलेले गुणोत्तर 100 ने गुणिल्यास जे येते त्यास असे म्हणतात

The ratio of mental age to the chronological age multiplied by 100 is termed as

دماغی عمر کا اعدادو شمار کے عمر کے تناسب کو 100 سے ضرب دیا جاتا ہے تو اسے کہا جاتا ہے

A.भावनिक गुणांक
A.Emotional quotient
A.جذباتی کوشینٹ

B.बुद्ध्यांक
B.Intelligence quotient
B.ذہانتی کوشینٹ

C.A व B
C.A & B
C.A اور B

D.कोणतेही नाही
D.None
D.کوئی نہیں

Answer: B.बुद्ध्यांक
B.Intelligence quotient
B.ذہانتی کوشینٹ

180 सूचना: खालील दिलेल्या प्रश्नामध्ये काही विधाने आणि काही निष्कर्ष आहेत. सामन्यात: ज्ञात तथ्यांपेक्षा ते वेगळे असतील तर दिलेली विधाने तुम्हाला सत्य मानवी लागतील आणि त्यानंतर दिलेल्या विधानाचे अनुकरण दिलेल्यापैकी कोणता निष्कर्ष तार्किकदृष्ट्या करतो ते ठरवा.

विधाने:
P = U < M < K ≤ I > N
निष्कर्ष:
I. N ≥ K
II. I > P

DIRECTIONS: In the question given below, there are few statements followed by few conclusions. You have to take the given statements to be true even if they seem to be at variance with commonly known facts and then decide which of the given conclusion logically follow(s) from the given statements.

Statements:
P = U < M < K ≤ I > N
Conclusions:
I. N ≥ K
II. I > P

ہدایات: مندرجہ ذیل سوال میں، کچھ بیانات کے بعد کچھ نتائج موجود ہیں. اگر آپ کو عام طور پر جانے جاتے حقائق کے ساتھ بھی متغیر ہونے لگے تو بھی آپ دئے گئے بیانات دماغ میں رکھیں اور پھر اس بات کا فیصلہ کریں کہ ذیل میں دیا گیا کونسا نتیجہ منطقانہ طور پر دیے گئے بیانات کی پیروی کرتا ہے.

بیانات:
P = U < M < K ≤ I > N
نتائج:
I .N ≥ K
II .I > P

A.तर फक्त I निष्कर्ष खरा आहे
A.If only conclusion I is true
A.اگر صرف I نتیجہ درست ہے

B.तर I व II हे दोन्हीही निष्कर्ष खरे नाहीत
B.If neither conclusion I nor II is true
B.اگر I اور II نتائج میں سے کوئی بھی درست نہیں

C.तर फक्त II निष्कर्ष खरा आहे
C.If only conclusion II is true
C.اگر صرف II نتیجہ درست ہے

D.तर I किंवा II यापैकी एक निष्कर्ष खरा आहे
D.If either conclusion I or II is true
D.اگر I اور II نتائج میں سے ایک درست ہے

Answer: C.तर फक्त II निष्कर्ष खरा आहे
C.If only conclusion II is true
C.اگر صرف II نتیجہ درست ہے

181 खालीलपैकी कोणता उत्सर्जन संस्थेचा भाग नाही?

Which of the following is not part of the excretory system?

مندرجہ ذیل میں سے کون سا مادہ خارج کرنے والے نظام کا حصہ نہیں ہے؟

A.डोळे
A.Eyes
A.آنکھیں

B.मूत्रपिंड
B.Kidneys
B.گردے

C.फफ्फुसे
C.Lungs
C.پھیپھڑے

D.त्वचा
D.Skin
D.جلد

Answer: A.डोळे
A.Eyes
A.آنکھیں

182

खालील आकृतीमध्ये किती चौरस आहेत?

How many squares are there in this figure?

نیچے دی ہوئی شکل میں کتنے مربع ہیں؟

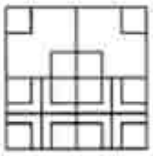

A. 24

B. 23

C. 27

D. 26

Answer: C. 27

183 Which of the following is an exclusively video- sharing site?

انمیں سے کونسی خالصتاً ویڈیو شئرنگ سائٹ ہے :

A.You Tube
A.یو ٹیوب

B.Vimeo
B.ویمیو

C.Both of these
C.دونوں

D.None of these
D.انمیں سے کوئی نہیں

Answer: C.Both of these
C.دونوں

184 सूचना: खालील प्रश्नांमध्ये दिलेल्या पर्यायांमधून संबंधित अक्षर समूह निवडा.

FKAG : KFGA :: MVKQ : ?

DIRECTIONS: In the following question, select the related group of letters from the given alternatives.

FKAG : KFGA :: MVKQ : ?

سمت: مندرجہ ذیل سوال میں، دیے گئے متبادل میں سے حروف کا متعلقہ گروپ منتخب کریں۔

FKAG : KFGA :: MVKQ : ?

A.VMKQ
A.VMKQ
A.VMKQ

B.VKMQ
B.VKMQ
B.VKMQ

C.VQMK
C.VQMK
C.VQMK

D.VMQK
D.VMQK
D.VMQK

Answer: D.VMQK
D.VMQK
D.VMQK

185 दिलेली अदलाबदल : चिन्हे ÷ आणि +, तसेच आकडे 3 आणि 7 ; तर 6 + 7 x 3 ÷ 2– 1 चे मूल्य किती ?

Given interchanges: signs ÷ and +, and numbers 3 and 7; then the value of 6 + 7 × 3 ÷ 2 - 1 is

دیئے گئے تبادلے: علامات ÷ اور +، اور نمبر 3 اور 7؛ تو 6 + 7× 3 ÷ 2 - 1کی تعداد ہے

A.10
A.10
A.10

B.15
B.15
B.15

C.18
C.18
C.18

D.17
D.17
D.17

Answer: B.15
B.15
B.15

186 DIRECTIONS: A sentence with an underlined word is given below. Find the Word which is most similar in meaning to the underlined word.
The defiant toddler refused to leave the park.

A.Disobedient

B.Obedient

C.Courteous

D.Young

Answer: A.Disobedient

187 सूचना: खालील माहिती काळजीपूर्वक वाचा आणि खाली दिलेल्या प्रश्नांची उत्तरे द्या.
A, B, C, D, E, F, G आणि H हे आठ मित्र एका गोलाकार टेबलभोवती मध्याभागाकडे बघत बसलेले आहेत. A हा D च्या डावीकडून दुसऱ्या जागेवर बसला आहे, जो E च्या डाव्या बाजूला तिसरा आहे. C हा G च्या उजवीकडील तिसऱ्या जागेवर बसला आहे, जो की E चा तत्काळ शेजारी नाही. H हा B च्या उजवीकडील तिसऱ्या जागेवर बसला आहे, जो G च्या उजवीकडे दुस-या जागेवर आहे.
Hच्या संदर्भामध्ये Aची स्थिती काय असेल?

DIRECTIONS: Read the following information carefully and answer the questions that given below.
A, B, C, D, E, F, G and H are eight friends sitting around a circular table facing the centre. A sits second to the left of D, who is third to the left of E. C sits third to the right of G, who is not an immediate neighbour of E. H sits third to the right of B, who sits second to the right of G.
What is the position of A with respect to H?

ہدایات: مندرجہ ذیل معلومات کو دھیان سے پڑھیں اور نیچے دیے گئے سوالوں کے جواب دیں۔
A، B، C، D، E، F، G اور H آٹھ دوست ہیں جو مرکز کا رخ کیے ہوئے ایک گول میز کے ارد گرد بیٹھے ہیں۔ A، D کے بائیں سے H، B کا فوری پڑوسی نہیں ہے۔ E کے دائیں سے تیسرے پر بیٹھا ہے، جو C، G کے بائیں سے تیسرا ہے۔ E دوسرے پر بیٹھا ہے، جو G کے دائیں سے دوسری جگہ پر بیٹھا ہے۔ G کے دائیں طرف تیسرے نمبر پر بیٹھا ہے، جو
H کے تعلق سے A کی پوزیشن کیا ہے؟

A.डावीकडे तिसरा
A.Third to the left
A.بائیں سے تیسرا

B.उजवीकडून तिसरा
B.Third to the right
B.دائیں سے تیسرا

C.डावीककडून दुसरा
C.Second to the left
C.بائیں سے دوسرا

D.उजवीकडून दुसरा
D.Second to the right
D.دائیں سے دوسرا

Answer: D.उजवीकडून दुसरा
D.Second to the right
D.دائیں سے دوسرا

188 धनेश पूर्वेला 50 मी चालत जातो आणि मग आपल्या उजव्या बाजूला वळून 30 मीटर चालतो. तर आता तो त्याच्या सुरुवातीच्या ठिकाणापासून कुठल्या दिशेला आहे?

Dhanesh walks 50 m east and then he turns to his right and walks 30 meters. Now, in which direction is he from his starting point?

دنیش مشرق کی طرف 50 میٹر چلتا ہے پھر وہ اپنے دائیں طرف مڑتا ہے اور 30 میٹر چلتا ہے۔ اب، وہ اپنے شروعاتی نقطہ سے کس سمت میں ہے؟

A.दक्षिण-पश्चिम
A.South-west
A.جنوب-مغرب

B.उत्तर-पूर्व
B.North-east
B. شمال-مشرق

C.उत्तर-पश्चिम
C.North-west
C. شمال-مغرب

D.दक्षिण-पूर्व
D.South-east
D. جنوب-مشرق

Answer: D.दक्षिण-पूर्व
D.South-east
D. جنوب-مشرق

189	निर्देश: दिलेल्या अंक मालिकेतील चुकीची संज्ञा शोधा: 1, 4, 27, 258, 3125, 46656, 823543 DIRECTIONS: Find the wrong term in the given number series: 1, 4, 27, 258, 3125, 46656, 823543 ہدایت دے گئے نمبرس سرج مے غلط نمبر کھوجے 1, 4, 27, 258, 3125, 46656, 823543
	A.27 A.27 A.27
	B.258 B.258 B.258
	C.3125 C.3125 C.3125
	D.4 D.4 D.4
Answer:	B.258 B.258 B.258

190 विधान:
स्थानिक समाजाचे अध्यक्ष समाजातील एका बागेमध्ये असलेल्या एका मुलासह बसलेल्या समाजातील एका मुलीला पकडले.

कृतीचा कोर्स:
I. मुलाला इशारा दिला पाहिजे आणि मुलगी आपल्या आईवडिलांना द्यावी.
II. मुलाला मारल पाहिजे आणि मुलीला शिक्षा दिली पाहिजे.

Statement:
President of the local society caught a girl of the society sitting with a boy in a park inside the society.

Course of actions:
I. The boy should be given a warning and girl should be handed over to her parents.
II. The boy should be beaten up and the girl should be punished

بیان:
لوکل سوسائٹی کے صدر نے سوسائٹی کی ایک لڑکی کو سوسائٹی کے اندر ایک پارک میں ایک لڑکے کے ساتھ بیٹھے ہوئے پکڑ لیا۔

لائحہ عمل:
I۔لڑکے کو وارننگ دی جانی چاہیے اور لڑکی کو والدین کے حوالے کیا جانا چاہیے
II۔ لڑکے کو مارنا چاہیے اور لڑکی کو سزا دی جانی چاہیے ۔

A.फक्त I अनुसरून आहे
A.Only I follows
A. صرف I لاگو ہو گا۔

B.फक्त II अनुसरण करते आहे
B.Only II follows
B. صرف II لاگو ہو گا۔

C.एकतर I किंवा II अनुसरून आहे
C.Either I or II follows
C. I یا II میں سے ایک لاگو ہو گا۔

D.I किंवा II दोन्हीपैकी काहीही अनुसरण करत नाही
D.Neither I nor II follows
D. I اور II میں سے کوئی بھی لاگو نہیں ہو گا۔

Answer: D.I किंवा II दोन्हीपैकी काहीही अनुसरण करत नाही
D.Neither I nor II follows
D. I اور II میں سے کوئی بھی لاگو نہیں ہو گا۔

191

सूचना: खालील प्रश्नात एक उघडलेला फासा दाखविला आहे. उत्तराच्या पर्यायांपैकी कोणता पर्याय ▲ या चिन्हाच्या विरुद्ध बाजूला येईल?

DIRECTIONS: In the following question an unfolded dice is given. From the given alternatives which of the following will be opposite of ▲ ?

ہدایات: نیچے کے سوال میں ایک بغیر فولڈ کیا ہوا پاسہ دیا گیا ہے، دیئے گئے متبادلات میں سے کونسی ▲ نیچے والی شکل اپوزٹ ہوگی

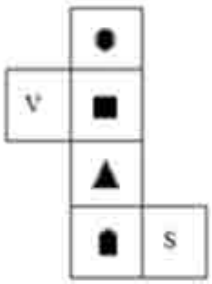

(A) ■

(B) ▲

(C) V

(D) ●

Answer:

(D) ●

For More Info And Videos About TAIT-Exam Syllabus And Other Exam Visit My Channel
TAIT च्या 30 प्रश्नपत्रिका PDF
BADSHAHimp Available Request 9765226781
WWW.YouTube.com/BADSHAHimp
Subscribe My Channel

192 सूचना: अर्थपूर्ण परिच्छेद निर्माण करण्यासाठी, खाली दिलेली (P), (Q) (R), (S) आणि (T) ही पाच वाक्ये योग्य अनुक्रमाने पुनर्रचना करा; त्यांनतर खालील प्रश्नांची उत्तर द्या.

P. चतुर कोल्ह्याने प्रत्युत्तर दिले, " मोठा दुष्काळ पडणार आहे आणि माझ्याकडे पाणी असल्याची खात्री करून घेण्यासाठी मी येथे आलो आहे."
Q. एकदा जंगलात एकटाच चालताना एक दुर्दैवी कोल्हा एका विहिरीत पडतो.
R. कोल्ह्याने शेळीवर सहजपणे उडी मारली आणि तिच्या शिंगांचा उपयोग करून तो वर पोहचला, शेळी विहिरीतच राहिली.
S. शेळी भोळेपणाने विश्वास ठेवते आणि विहिरीत उडी मारते.
T. जवळून जाणारी शेळी कोल्ह्याला पहाटे आणि तो विहिरीत काय करतो ते विचारते.

पुनर्रचना केल्यानंतर खालीलपैकी कोणते वाक्य पहिले असेल?

DIRECTION: Rearrange the following five sentences (P), (Q), (R), (S) and (T) in the proper sequence to form a meaningful paragraph; then answer the questions given below them.
P. The cunning fox responds, “there is going to be a great drought, and I am here to make sure I have water.”
Q. Walking alone in the forest, an unlucky fox falls into a well one day.
R. The fox swiftly jumps on the goat and uses its horns to reach the top, leaving the goat in the well.
S. The gullible goat believes this and jumps into the well.
T. A passing goat sees the fox and asks him why he is in the well.

Which of the following should be the FIRST sentence after rearrangement?

ہدایات: ان پانچ جملوں (P)، (Q)، (R)، (S) اور (T) کو با معنی پیرا بنانے کے لئے دوبارہ ترتیب دیجئے، پھر نیچے دے گئے سوالوں کے جواب دیجئے

P. لالچی لومڑی نے جواب دیا، " ایک بہت بدی قحط سالی آنے والی ہے، اور میں یہاں اسلئے ہوں کہ میرے پاس پانی ہے.
Q. جنگل میں اکیلے چلتے ہوئے، ایک بدکسمت لومڑی کونوے میں گر گیا.
R. لومڑی آرام سے بکری کے اپر چڑ گیا اور اپر آنے تک اسکے سینگ کہ استعمال کیا، بکری کو کنوے میں ہی چھوڑ دیا.
S. احمق بکری نے اس پر یکین کیا اور پانی میں کود گیی.
T. ایک گزرتی ہوئی بکری نے لومڑی کو دیکھا اور پوچھا کہ وو پانی میں کیوں ہے.

دوبارہ ترییب دینے کے بعد کون سا جملہ پہلے ہونا چاہیے؟

A.Q
A.Q
A.Q

B.P
B.P
B.P

C.R
C.R
C.R

D.S
D.S
D.S

For More Info And Videos About TAIT-Exam Syllabus And Other Exam Visit My Channel
TAIT च्या 30 प्रश्नपत्रिका PDF Available Request 9765226781
BADSHAHimp
WWW.YouTube.com/BADSHAHimp
Subscribe My Channel

Answer: A.Q
A.Q
A.Q

193 दिलेल्या शब्दामधून खालीलपैकी कोणता शब्द तयार केला जाऊ शकतो?
ALTERNATIVES

Which of the following word can be formed from the given word?
ALTERNATIVES

دیےگیے لفظ سے مندرجہ ذیل الفاظ میں سے کونسا بنایا جاسکتا ہے؟
‘ALTERNATIVES’

A.RENOVATE
A.RENOVATE
A.RENOVATE

B.TELEVISION
B.TELEVISION
B.TELEVISION

C.RESPITE
C.RESPITE
C.RESPITE

D.TRAINS
D.TRAINS
D.TRAINS

Answer: D.TRAINS
D.TRAINS
D.TRAINS

194 खालीलपैकी पुल्लिंगी शब्द ओळखा.

A.वृत्त

B.वृत्तपत्र

C.वृत्तांत

D.वृत्ती

Answer: C.वृत्तांत

195	Choose the word which is most similar in meaning to the given word. SCARED
	A.Frightened
	B.Courageous
	C.Fearless
	D.Valiant
Answer:	A.Frightened

196	सूचनाः दिलेल्या पर्यायांमधून ऍनालॉगस शब्द निवडा. मॅनोमीटरचा संबंध लिक्वीड प्रेशरसोबत आहे जसा फोटोमीटरचा संबंध ... सोबत आहे. DIRECTIONS: Choose the analogous word from the given alternatives. Manometer is to Liquid pressure as Photometer is to _____. ہدایات: دیے گئے متبادل سے مطابق لفظ کا انتخاب کریں مانومیٹر پانی کے دباؤ کے لئے ویسے ہی ہے جیسے فوٹومیٹر ---------- کے لئے .
	A.वाऱ्याचा वेग A.Wind speed A. ہوا کی رفتار
	B.द्रव प्रवाह B.Liquid flow B. پانی کا بہاؤ
	C.प्रकाशाची तीव्रता C.Intensity of light C. روشنی کی شدّت
	D.वातावरणाचा दाब D.Atmospheric pressure D. فضایی دباؤ
Answer:	C.प्रकाशाची तीव्रता C.Intensity of light C. روشنی کی شدّت

197 खालील पैकी काय व्यावसायिक माहितीसाठी संभवनीय नाही?

Which of the following has no potential for occupational information?

مندرجہ ذیل میں سے کس میں پیشہ ورانہ معلومات کے لئے کوئی صلاحیت نہیں ہے؟

A.प्राथमिक शाळेतील क्रियाकलाप सामायिक करणे
A.Sharing activities in the elementary school
A.ابتدائی اسکول میں شیئرنگ کی سرگرمیاں

B.कनिष्ठ शाळेच्या सामान्य वर्ग
B.The general class of a Junior high school
B.ایک جونیئر ہائی اسکول کی عام کلاس

C.वरिष्ठ उच्च शाळेत जीवशास्त्र वर्ग
C.A biology class in a senior high-school
C.ایک سینئر ہائی اسکول میں حیاتیات کی کلاس

D.वरीलपैकी काहीही नाही.
D.None of the above.
D.اوپر میں سے کوئی نہیں۔

Answer: D.वरीलपैकी काहीही नाही.
D.None of the above.
D.اوپر میں سے کوئی نہیں۔

198 डावखुऱ्या मुलांना

Left handed child should be

بائیں ہاتھ والے بچوں کو چاہئے

A.उजवा हात वापरण्यासाठी प्रोत्साहित करावे
A.Encouraged to use right hand
A.دایاں ہاتھ استعمال کرنے کی حوصلہ افزائی

B.डाव्या हाताचा वापर थांबविण्यास भाग पाडावे
B.Stopped using left handed
B.بایاں ہاتھ کا استعمال روکے

C.दोन्ही हात वापरण्यासाठी प्रशिक्षित केले जावे
C.trained to use both hands
C.دونوں ہاتھ کا استعمال کرنے کی ٹریننگ

For More Info And Videos About TAIT-Exam Syllabus And Other Exam Visit My Channel
TAIT च्या 30 प्रश्नपत्रिका PDF
BADSHAHimp Available Request 9765226781
YouTube WWW.YouTube.com/BADSHAHimp
Subscribe My Channel

D.डाव्या हाताचा वापर सुरूच ठेवण्यास सांगावे
D.continued to use left hand
D.بایاں ہاتھ کا استعمال جاری رکھے

Answer:

D.डाव्या हाताचा वापर सुरूच ठेवण्यास सांगावे
D.continued to use left hand
D.بایاں ہاتھ کا استعمال جاری رکھے

199

प्रसारकाशी संबंधित प्रभाव _____ ते_____पर्यंतचा दृष्टी बदलू शकतो.

Media related influences can change attitude from _____ to _____

میڈیا سے پیدا ہونے والی تحریک رویے کو _____سے _____میں تبدیل کر سکتی ہے۔

A.चांगले ते खराब
A.Good to Bad
A.اچھے سے برا

B.खराब ते चांगले
B.Bad to Good
B.برے سے اچھ

C.नकारात्मक वर सकारात्मक
C.Positive to Negative
C.مثبت سے منفی

D.हे सर्व
D.All of these
D.مذکورہ سبھی

Answer:

D.हे सर्व
D.All of these
D.مذکورہ سبھی

200

सूचना: दिलेल्या चारांपैकी वेगळी (असंबद्ध) असणारी आकृती शोधून काढा.

DIRECTIONS: Choose the odd figure from the given four figures.

ہدایات: دیئے گئے اختیارات میں صحیح شکل کا انتخاب کر کے سیریز کو مکمل کیجیئے۔



For More Info And Videos About TAIT-Exam Syllabus And Other Exam Visit My Channel
TAIT च्या 30 प्रश्नपत्रिका PDF
BADSHAHimp Available Request 9765226781
WWW.YouTube.com/BADSHAHimp
Subscribe My Channel

	A. (A)
	B. (B)
	C. (C)
	D. (D)
Answer:	C. (C)

For More Info And Videos About TAIT-Exam Syllabus And Other Exam Visit My Channel
TAIT च्या 30 प्रश्नपत्रिका PDF
BADSHAHimp Available Request 9765226781
YouTube WWW.YouTube.com/BADSHAHimp
Subscribe My Channel

Question Paper Title : TAIT_PAPER_18

Date of Exam : 2017-12-20 09:00:00.0

1 **सूचना:** खालील प्रश्नात उत्तरातील पर्यायांपैकी कोणत्या पर्यायी आकृतीत प्रश्नातील आकृती अंतर्भूत आहे?

DIRECTIONS: In the given question find the answer figure in which question figure is embedded.

ہدایات: دیئے گئے سوال میں جواب والی شکل دریافت کیجیئے جس میں سوال والی شکل سرایت کرگئی ہے۔

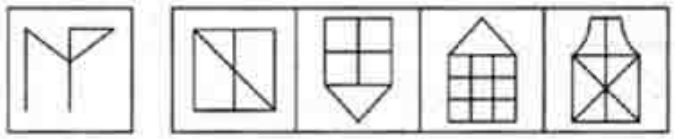

A. (A)

B. (B)

C. (C)

D. (D)

Answer: D. (D)

2 पानांची कार्ये -

Functions of leaf -

پتی کے افعال -

A.प्रकाशसंश्लेषण
A.Photosynthesis
A. فوٹو سنتھیسس

B.बाष्पोत्सर्जन
B.Transpiration
B. ٹرانسپائریشن

C.वरील दोन्ही
C.Both the above
C.اوپر کے دونوں

For More Info And Videos About TAIT-Exam Syllabus And Other Exam Visit My Channel
TAIT च्या 30 प्रश्नपत्रिका PDF Available Request 9765226781
WWW.YouTube.com/BADSHAHimp
Subscribe My Channel
BADSHAHimp

	D.वरीलपैकी काहीही नाही D.None of the above D.مندرجہ بالا میں سے کوئی بھی
Answer:	C.वरील दोन्ही C.Both the above C.اوپر کے دونوں
3	पुढील म्हण पूर्ण करा - ‘ करावे तसे --------- ‘
	A.भरावे
	B.नवे नवे
	C.स्मरावे
	D.उरावे
Answer:	A.भरावे
4	Out of the given options, choose the one which is the correct passive voice of the sentence given below. I remember my father taking me to the theatre.
	A.I remembered how I were being taken to the theatres by my father.
	B.I remember how I was being took to the theatres by my father.
	C.I remember being taken to the theatre by my father.
	D.I remember having being taken to the theatres by my father.
Answer:	C.I remember being taken to the theatre by my father.
5	Choose the word which is opposite in meaning to the given word. ROBUST
	A.Feeble
	B.Strong
	C.Vigorous

For More Info And Videos About TAIT-Exam Syllabus And Other Exam Visit My Channel
TAIT च्या 30 प्रश्नपत्रिका PDF Available Request 9765226781
BADSHAHimp
WWW.YouTube.com/BADSHAHimp
Subscribe My Channel

D.Sturdy

Answer: A.Feeble

6 सूचना: दिलेल्या माहितीचा काळजीपूर्वक अभ्यास करा आणि खालील प्रश्नांची उत्तरे द्या:
सात नृत्ये - हिप हॉप, टॅप डान्स, येंग्को डान्स, बेली डान्स, कथक, साल्सा आणि बॅलेट डान्स सलग सात महिने लागोपाठ आयोजित होणार आहेत (जानेवारीपासून सुरु होऊन जुलै अखेर संपत) ते एकाच क्रमाने होतील हे गरजेचे नाही. एका महिन्यामध्ये केवळ एकच नृत्य आयोजित केले जाऊ शकते. बॅलेट डान्सनंतर केवळ दोन नृत्ये आयोजित केली जातील. साल्सा आणि बॅलेट डान्स दरम्यान केवळ दोन नृत्ये आयोजित केली जातील. टॅप डान्स आणि कथक यांच्यातील केवळ तीन नृत्य आयोजित केले जातील. टॅप नृत्य जुलैमध्ये आयोजित होणार नाही. हिप हॉप बेली डान्स आणि यंग्को नृत्यच्या आधी आयोजित केले जाईल (लगेच आधी असतील असे नाही). बेली डान्सनंतर यंग्को डान्स आयोजित केले जाईल (लगेच आधी असतील असे नाही).
जानेवारी महिन्यात कोणत्या नृत्याचे आयोजन केले जाईल?

DIRECTIONS: Study the given information carefully and answer the given questions:
Seven Dances -Hip Hop, Tap Dance, Yangko Dance, Belly Dance, Kathak, Salsa and Ballet Dance are to be held on seven consecutive months (starting on January and ending on July) not necessarily in the same order. Only one dance can be held on one month. Only two dances will be held after Ballet Dance. Only two dances will be held between Salsa and Ballet Dance. Only three dances will be held between Tap Dance and Kathak. Tap Dance will not be held on July. Hip Hop will be held before Belly Dance and Yangko Dance (not necessarily immediately before). Yangko Dance will be held after Belly Dance (not necessarily immediately after).
Which Dance will be held on January?

ہدایات: مندرجہ ذیل معلومات کو دھیان سے پڑھیں اور دیے گئے سوالوں کے جواب دیں۔
سات ڈانس – ہپ ہاپ، ٹیپ ڈانس، یانگکو ڈانس، بیلے ڈانس، کتھک، سالسا اور بیلے ڈانس سات لگاتار مہینوں (جنوری میں شروع اور جولائی میں ختم ہونے والے) میں منعقد کیے جانے ہیں، جن کا یکساں ترتیب میں ہونا ضروری نہیں ہے۔ ایک مہینہ میں صرف ایک ڈانس منعقد کیا جاسکتا ہے۔ بیلے ڈانس کے بعد صرف دو ڈانس منعقد ہوں گے۔ سالسا اور بیلے ڈانس کے درمیان صرف دو ڈانس منعقد ہوں گے۔ ٹیپ ڈانس اور کتھک کے درمیان صرف تین ڈانس منعقد ہوں گے۔ ٹیپ ڈانس کا انعقاد جولائی میں نہیں ہوگا۔ ہپ ہاپ کا انعقاد بیلی ڈانس اور یانگکو ڈانس سے پہلے ہوگا (فوری طور پر پہلے ضروری نہیں ہے)۔ یانگکو ڈانس بیلی ڈانس کے بعد منعقد ہوگا (فوری طور پر بعد میں ضروری نہیں ہے)۔
جنوری میں کون سا ڈانس منعقد ہوگا؟

A.साल्सा
A.Salsa
A.سالسا

B.टॅप नृत्य
B.Tap Dance
B.ٹیپ ڈانس

C.कत्थक
C.Kathak
C.کتھک

D.हिप हॉप
D.Hip Hop
D.ہپ ہاپ

For More Info And Videos About TAIT-Exam Syllabus And Other Exam Visit My Channel
TAIT च्या 30 प्रश्नपत्रिका PDF Available Request 9765226781
BADSHAHimp
WWW.YouTube.com/BADSHAHimp
Subscribe My Channel

Answer:	D.हिप हॉप D.Hip Hop D.ہپ ہاپ

7	Out of the given options, choose the one which is the correct indirect speech of the sentence given below. The teacher said to his students, “Did you not like my story yesterday?”
	A.The teacher asked his students if they did not like his story yesterday.
	B.The teacher asked his students if they did not liked his story the day before.
	C.The teacher asked his students if they had not liked his story the day before.
	D.The teacher asks his students if they have not like his story the day before.
Answer:	C.The teacher asked his students if they had not liked his story the day before.

For More Info And Videos About TAIT-Exam Syllabus And Other Exam Visit My Channel
TAIT च्या 30 प्रश्नपत्रिका PDF
BADSHAHimp Available Request 9765226781
WWW.YouTube.com/BADSHAHimp
Subscribe My Channel

8 सूचना: प्रत्येक प्रश्नाला एक प्रमुख विधानासोबत चार विधाने आहेत ज्यांच्याखाली A, B, C आणि D असे चार विधान आहेत. क्रमवार विधानांची जोडी निवडा ज्यामध्ये प्रथम विधान दुसऱ्या विधानाला सुचवते, आणि दोन्ही विधाने तर्किकदृष्ट्या प्रमुख विधानासोबत निगडित असेल.

पुस्तके एकतर माहितीपूर्ण आहेत किंवा मनोरंजक आहेत.
A. पुस्तके माहितीपूर्ण आहेत.
B. पुस्तके माहितीपूर्ण नाहीत.
C. पुस्तके मनोरंजक आहेत.
D. पुस्तके मनोरंजक नाहीत.q

DIRECTIONS: Each question has a main statement followed by four statements labelled A, B, C and D. Choose the ordered pair of statements, where the first statement implies the second, and the two statements are logically consistent with the main statement.

The book is either informative or entertaining.
A. The book is informative
B.The book is not informative
C.The book is entertaining
D.The book is not entertaining

ہدایت: ہر سوال میں ایک جملہ ہے جسکے بعد چار جملےاے، بی،سی اور ڈی کے نام سے دئے گئے ہیں اسمیں منسلک جوڑیوں کو چنئے۔ جہاں پہلا جملہ دوسرے جملہ کی اور اشارہ کر رہا ہے اور دو جملے منطقی مرکزی بیان کے مطابق ہیں

کتاب یا معلوماتی ہے یا تفریحی
A کتاب معلوماتی ہے ۔
B کتاب معلوماتی نہیں ہے ۔
C کتاب تفریحی ہے ۔
D کتاب تفریحی نہیں ہے ۔

A.BD
A.BD
A.BD

B.DA
B.DA
B.DA

C.CB
C.CB
C.CB

D.AB
D.AB
D.AB

Answer: B.DA
B.DA
B.DA

For More Info And Videos About TAIT-Exam Syllabus And Other Exam Visit My Channel
TAIT च्या 30 प्रश्नपत्रिका PDF
BADSHAHimp Available Request 9765226781
WWW.YouTube.com/BADSHAHimp
Subscribe My Channel

9 दिलेल्या आकृतीमध्ये जर त्रिकोण सुदृढ लोक प्रदर्शित करतो, चौरस वयस्कर व्यक्ति दर्शवतो आणि वर्तुळ पुरुष दर्शवत असेल तर सुदृढ असलेले परंतु वयस्कर नसलेले पुरुष कोणत्या संख्येनं दर्शवले जातात?

In the given figure if Triangle represents healthy people, Square represents old persons and Circle represents men then What is the number of those men who are healthy but not old?

دی گئی ڈایاگرام میں اگر مثلث صحت مند لوگوں کی نمائندگی کرتا ہے، اسکوائر بزرگ افراد کی نمائندگی کرتا ہے اور سرکل مردوں کی نمائندگی کرتا ہے تو ان لوگوں کی تعداد کتنی ہے جو صحت مند ہیں لیکن بزرگ نہیں ؟

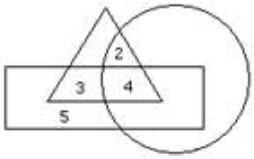

A. 3

B. 4

C. 6

D. 2

Answer: D. 2

10 **सूचना:** खालील प्रश्नात कागदाच्या एक तुकड्याला (चौकोनी / गोलाकार / त्रिकोणी) घड्या घातल्या आहेत व भोके पाडली आहेत. हा कागद उलगडल्यावर प्रश्नातील आकृतीप्रमाणे दिसतो. उत्तरादाखल पर्यायांमधून अशी आकृती निवडा जी उलगडल्यावर कागदाचे स्वरूप प्रश्नात दाखविल्याप्रमाणे दिसेल.

DIRECTIONS: In the following question, a sheet (square/circle/triangle) of paper is folder and punch is made. When unfolded the paper sheet looks like the question figure. See the answer figures and select the one that follows the manner in which the paper is folded and punch is made.

ہدایات: نیچے دیئے گئے سوال میں، کاغذ کی شیٹ (مثلث، مربع، دائرہ) فولڈ کرکے پنچ لگائی گئی ہے، جب بغیر فولڈ کی ہوئی کاغذ کی شیٹ سوالیہ شکل کی طرح دکھتی ہے، جوابی شکلوں کو دیکھ کر اسکو چنئے جو ایسی لگے کہ، کاغذ شیٹ کو فولڈ کرکے پنچ لگایا گیا ہے۔

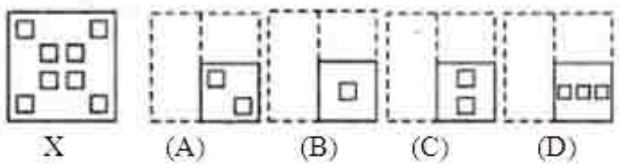

A. (A)

B. (B)

C. (C)

D. (D)

For More Info And Videos About TAIT-Exam Syllabus And Other Exam Visit My Channel
TAIT च्या 30 प्रश्नपत्रिका PDF
BADSHAHimp Available Request 9765226781
WWW.YouTube.com/BADSHAHimp
Subscribe My Channel

Answer: A. (A)

11 भारत हा क्षेत्रफळाच्या दृष्टीने जगातील _____सर्वांत मोठा देश आहे.

India is the _____ largest country in the world by area.

رقبہ کے حساب سے بھارت دنیا کا ------- بڑا ملک ہے :

A.चौथा
A.Fourth
A.چوتھا

B.पाचवा
B.Fifth
B.پانچواں

C.सहावा
C.Sixth
C.چھٹا

D.सातवा
D.Seventh
D.ساتواں

Answer: D.सातवा
D.Seventh
D.ساتواں

12 हृदयाला भिडणारे -

A.हार्दिक

B.हृदयस्पर्शी

C.हृदयांकित

D.वांछित

Answer: B.हृदयस्पर्शी

For More Info And Videos About TAIT-Exam Syllabus And Other Exam Visit My Channel
TAIT च्या 30 प्रश्नपत्रिका PDF Available Request 9765226781
BADSHAHimp
WWW.YouTube.com/BADSHAHimp Subscribe My Channel

13 सूचना: दिलेल्या माहितीचा काळजीपूर्वक अभ्यास करा आणि खालील प्रश्नांची उत्तरे द्या:
सात नृत्ये - हिप हॉप, टॅप डान्स, येंग्को डान्स, बेली डान्स, कथक, साल्सा आणि बॅलेट डान्स सलग सात महिने लागोपाठ आयोजित होणार आहेत (जानेवारीपासून सुरु होऊन जुलै अखेर संपत) ते एकाच क्रमाने होतील हे गरजेचे नाही. एका महिन्यामध्ये केवळ एकच नृत्य आयोजित केले जाऊ शकते. बॅलेट डान्सनंतर केवळ दोन नृत्ये आयोजित केली जातील. साल्सा आणि बॅलेट डान्स दरम्यान केवळ दोन नृत्ये आयोजित केली जातील. टॅप डान्स आणि कथक यांच्यातील केवळ तीन नृत्य आयोजित केले जातील. टॅप नृत्य जुलैमध्ये आयोजित होणार नाही. हिप हॉप बेली डान्स आणि यंग्को नृत्यच्या आधी आयोजित केले जाईल (लगेच आधी असतील असे नाही). बेली डान्सनंतर यंग्को डान्स आयोजित केले जाईल (लगेच आधी असतील असे नाही).
यांग्को डान्सनंतर लगेचच कोणते नृत्य आयोजित केले जाईल?

DIRECTIONS: Study the given information carefully and answer the given questions:
Seven Dances -Hip Hop, Tap Dance, Yangko Dance, Belly Dance, Kathak, Salsa and Ballet Dance are to be held on seven consecutive months (starting on January and ending on July) not necessarily in the same order. Only one dance can be held on one month. Only two dances will be held after Ballet Dance. Only two dances will be held between Salsa and Ballet Dance. Only three dances will be held between Tap Dance and Kathak. Tap Dance will not be held on July. Hip Hop will be held before Belly Dance and Yangko Dance (not necessarily immediately before). Yangko Dance will be held after Belly Dance (not necessarily immediately after).
Which Dance will be held immediately after Yangko Dance?

ہدایات: مندرجہ ذیل معلومات کو دھیان سے پڑھیں اور دیے گئے سوالوں کے جواب دیں۔
سات ڈانس – ہپ ہاپ، ٹیپ ڈانس، یانگکو ڈانس، بیلے ڈانس، کتھک، سالسا اور بیلے ڈانس سات لگاتار مہینوں (جنوری میں شروع اور جولائی میں ختم ہونے والے) میں منعقد کیے جانے ہیں، جن کا یکساں ترتیب میں ہونا ضروری نہیں ہے۔ ایک مہینہ میں صرف ایک ڈانس منعقد کیا جاسکتا ہے۔ بیلے ڈانس کے بعد صرف دو ڈانس منعقد ہوں گے۔ سالسا اور بیلے ڈانس کے درمیان صرف دو ڈانس منعقد ہوں گے۔ ٹیپ ڈانس اور کتھک کے درمیان صرف تین ڈانس منعقد ہوں گے۔ ٹیپ ڈانس کا انعقاد جولائی میں نہیں ہوگا۔ ہپ ہاپ کا انعقاد بیلی ڈانس اور یانگکو ڈانس سے پہلے ہوگا (فوری طور پر پہلے ضروری نہیں ہے)۔ یانگکو ڈانس بیلی ڈانس کے بعد منعقد ہوگا (فوری طور پر بعد میں ضروری نہیں ہے)۔
یانگکو ڈانس کے فوراً بعد کون سا ڈانس منعقد ہوگا؟

A.कत्थक
A.Kathak
A.کتھک

B.साल्सा
B.Salsa
B.سالسا

C.टॅप नृत्य
C.Tap Dance
C.ٹیپ ڈانس

D.बॅलेट डान्स
D.Ballet Dance
D.بیلے ڈانس

Answer: B.साल्सा
B.Salsa
B.سالسا

For More Info And Videos About TAIT-Exam Syllabus And Other Exam Visit My Channel
TAIT च्या 30 प्रश्नपत्रिका PDF Available Request 9765226781
BADSHAHimp
WWW.YouTube.com/BADSHAHimp
Subscribe My Channel

14

दिलेल्या आकृतीमध्ये, O हे वर्तुळाचे केंद्रक आहे. वर्तुळाची त्रिज्या 17 सेंमी आहे. जर OC = 8 सेंमी, असेल तर जीवा AB ची लांबी:

In the given figure, O is the center of the circle. Radius of the circle is 17 cm. If OC = 8cm, then the length of the chord AB is:

دی گئی شکل میں، O دائرے کا مرکز ہے۔ دائرے کا رداس 17 سینٹی میٹر ہے۔ اگر 8سینٹی میٹر = OC، پھر AB کی لمبائی ہے:

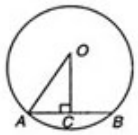

A. 35 सेंमी
35 cm
35سینٹی میٹر

B. 30 सेंमी
30 cm
30سینٹی میٹر

C. 15 सेंमी
15 cm
15سینٹی میٹر

D. 18 सेंमी
18 cm
18سینٹی میٹر

Answer: B. 30 सेंमी
30 cm
30سینٹی میٹر

15

सूचना: दिलेल्या पर्यायांमधून वेगळे ते बाहेर काढा.

DIRECTIONS: Find the odd one out from the given alternatives.

سمت: دیے گئے متبادل میں سے بے جوڑ کو تلاش کرو۔

A.19
A.19
A.19

B.28
B.28
B.28

C.37
C.37
C.37

D.45
D.45
D.45

Answer: D.45
D.45
D.45

16 तीन किंवा अधिक रेषांनी सीमाबध्द समतल आकृतीला म्हटले जाते

Any plane figure bounded by three or more than three lines is known as

تین یا اس سے زیادہ تین لائنوں پر مشتمل سادہ شکل جانی جاتی ہے

A.पंचकोन
A.Pentagon
A.پینٹاگون

B.अष्टकोन
B.Octagon
B.اوکٹا گون

C.बहुभुज
C.Polygon
C.پولیگون

D.षटकोन
D.Hexagon
D.ہیکسا گون

Answer: C.बहुभुज
C.Polygon
C.پولیگون

17 एका मोठ्या शहराची हवा खालीलपैकी कश्याने प्रदूषित होते?

Of the following which one pollutes the air of a big city?

مندرجہ ذیل میں سے ایک بڑے شہر کی ہوا آلودہ کس کی وجہ سے ہو جاتی ہے۔

A.तांबे
A.Copper
A.(الف) تانبا

B.क्रोमियम
B.Chromium
B.(ب) کرومیم

C.शिसे
C.Lead
C.(ج) لیڈ

D.कॅल्शियम
D.Calcium
D.(د) کیلشیم

Answer: C.शिसे
C.Lead
C.(ج) لیڈ

18 110 मीटर लांब असणारी ट्रेन, 60 किमी/तासाच्या गतीने धावत आहे. समांतर रुळावर थांबलेल्या 170 मीटर ट्रेनला पार करण्यासाठी तिला किती सेकंद लागतील?

A train, 110 meter long, is running at a speed of 60 kmph. How many seconds does it take to cross another train, 170 meter long, standing on parallel track?

110میٹرلمبی ایک ٹرین، 60 کلو میٹر فی گھنٹہ کی رفتار پر چل رہی ہے۔ متوازی پٹری پر کھڑی170 میٹر طویل ایک اور ٹرین کو پار کرنےمیں اسےکتنے سیکنڈ لگیں گے؟

A.15.6
A.15.6

B.16.8
B.16.8

C.17.2
C.17.2

D.18
D.18

Answer: B.16.8
B.16.8

19 निर्देश: खालील मालिकेतील गहाळ संख्या शोधा.
6, 7, 9, 13, 21, ...,

DIRECTION: Find the missing number in the following series.

6, 7, 9, 13, 21, ...,

ہدایات: جیل کے سرج مے گمشدہ نمبر کھوجے.

6, 7, 9, 13, 21, ...,

A.25
A.25
A.25

B.29
B.29
B.29

C.37
C.37
C.37

D.32
D.32
D.32

Answer: C.37
C.37
C.37

20 **सूचना:** दिलेल्या पर्यायांमधून श्रेणी पूर्ण करणारी योग्य आकृती निवडा.

DIRECTIONS: Complete the series by choosing right figure from the given choices.

ہدایات: دیئے گئے اختیارات میں سے صحیح شکل کو چن کر سلسلہ کو مکمل کیجیئے

Problem Figures

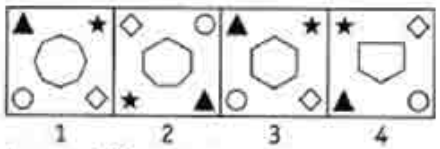

Answer Figures

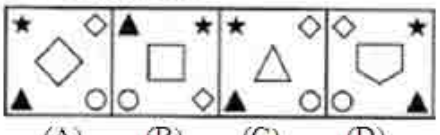

A. (A)

B. (B)

C. (C)

D. (D)

Answer: C. (C)

21 A हा B चा भाऊ आहे, Cही A ची आई आहे, D हा C चा वडील आहे आणि F हा A चा मुलगा आहे. F चे C सोबत नाते काय?

A is B's brother, C is A's mother, D is C's father and F is A's son. How is F related to C ?

B A ،کا بھائی ہے A C ،کی ماں ہے C D اور A F کا باپ ہے .کا بیٹا ہے F کا C سے کیا رشتہ تھا؟

A.आई
A.Mother
A.ماں

B.चुलत भाऊ
B.Cousin
B.چچا زاد

C.पुतण्या
C.Nephew
C.بتیجا

D.नातू
D.Grandson
D.پوتا

Answer: D.नातू
D.Grandson
D.پوتا

22 A sentence with an underlined idiomatic expression is given. What is the meaning of the idiomatic expression ‘In a flutter’ in the sentence given below?
We were all <u>in a flutter</u> waiting to meet the President at our school rally.

A.In a nervous, confused, or agitated state.

B.In a calm, quiet and relaxed state

C.Highly confident and poised

D.None of the above

Answer: A.In a nervous, confused, or agitated state.

23 6% प्रति वर्ष दराने रू. 1,250 ही रक्कम किती वर्षांमध्ये रू. 1,400 होईल?

In what time will Rs.1,250 amount to Rs.1,400 at 6% per annum?

سالانہ 6٪ کی در سے 1250 روپیہ کتنے وقت میں 1400 روپیہ کے مترادف ہوگا؟

A.2 वर्षे
A.2 years
A.2 سال

B.3 वर्षे
B.3 years
B.3 سال

C.4 वर्षे
C.4 years
C.4 سال

D.5 वर्षे
D.5 years
D.5 سال

Answer: A.2 वर्षे
A.2 years
A.2 سال

24 मानसशास्त्रज्ञ परिपक्वतेबद्दल बोलतात तेव्हा ते यामुळे येऊ घातलेल्या वाढीच्या टप्प्यांबाबत बोलत असतात

When psychologist discuss maturation, they are referring to stages of growth that are impended by

جب ماہر نفسیات بلوغت کے بارے میں بات چیت کرتے ہیں، وہ نشونما کی اس مرحلہ کا ذکر کرتے ہیں جو قریب الواقع ہوتا ہے بذریعہ

A.जतन
A.conservation
A.تحفّظ

B.निसर्ग
B.nature
B.فطرت

C.संगोपन
C.nurture
C.نشونما

D.सातत्य
D.continuity
D.تسلسل

Answer: D.सातत्य
D.continuity
D.تسلسل

25 सरळ रूप द्या:
481293162 – 72134626 = ?

Simplify:
481293162 – 72134626 = ?

سادہ بنائیں:
481293162 – 72134626= ?

A.409158536
A.409158536
A.409158536

B.409158436
B.409158436
B.409158436

C.409158236
C.409158236
C.409158236

D.409158136
D.409158136
D.409158136

Answer: A.409158536
A.409158536
A.409158536

26 असली मुले एक समस्या असतात जे

The problem child is generally one who has—

عام طور پر مسئلے والا بچہ وہ ہے، جو

A.प्रश्न सोडवत नाही
A.An unsolved problem
A.ایک غیر حل شدہ مسئلہ

B.अनुवांशिक पणे समस्या दायक असतात
B.A poor heredity
B.ایک غریب محافظ

C.गरीब कुटुंबातून येतात
C.A poor home environment
C.غریب گھر کا ماحول

D.जे लहान भाऊ किंवा बहीण असतात
D.A younger brother or sister
D.چھوٹا بھائی یا بہن

Answer:
A.प्रश्न सोडवत नाही
A.An unsolved problem
A.ایک غیر حل شدہ مسئلہ

27

डिजिटल सिस्टममधले सर्वात छोटे एकक कोणते आहे.....

The smallest unit in a digital system is a ……

ڈیجٹل سسٹم میں سب سے چھوٹی یونٹ ایک ----- ہے۔

A.बाईट
A.Byte
A.بائٹ

B.किलोबाईट
B.Kilobyte
B.کیلو بائٹ

C.वर्ड
C.Word
C.لفظ

D.बिट
D.Bit
D.بٹ

Answer:
D.बिट
D.Bit
D.بٹ

28 सूचना: प्रत्येक प्रश्नाला एक प्रमुख विधानासोबत चार विधाने आहेत ज्यांच्याखाली A, B, C आणि D असे चार विधान आहेत. क्रमवार विधानांची जोडी निवडा ज्यामध्ये प्रथम विधान दुसऱ्या विधानाला सुचवते, आणि दोन्ही विधाने तर्किकदृष्ट्या प्रमुख विधानासोबत निगडित असेल.

दिग्दर्शक एकतर समजूतदार आहे किंवा वेडा आहे.
A. दिग्दर्शक समजूतदार आहे.
B. दिग्दर्शक वेडा आहे.
C. दिग्दर्शक वेडा नाही.
D. दिग्दर्शक समजूतदार नाही.

DIRECTIONS: Each question has a main statement followed by four statements labelled A, B, C and D. Choose the ordered pair of statements, where the first statement implies the second, and the two statements are logically consistent with the main statement.

The director is either sane or insane .
A. The director is sane
B . The director is insane
C. The director is not Insane
D. The director is not sane

ہدایت: ہر سوال میں ایک جملہ ہے جسکے بعد چار جملےاے، بی،سی اور ڈی کے نام سے دئے گئے ہیں اسمیں منسلک جوڑیوں کو چنئے۔ جہاں پہلا جملہ دوسرے جملہ کی اور اشارہ کر رہا ہے اور دو جملے منطقی مرکزی بیان کے مطابق ہیں

یہ ڈائریکٹر یا تو سیانا ہے یا پاگل
A۔ ڈائریکٹر سیانا ہے
B۔ ڈائریکٹر پاگل ہے
C۔ ڈائریکٹر پاگل نہیں ہے
D۔ ڈائریکٹر سیانا نہیں ہے

A.AD
A.AD
A.AD

B.AC
B.AC
B.AC

C.CB
C.CB
C.CB

D.AB
D.AB
D.AB

Answer: B.AC
B.AC
B.AC

29 **सूचना:** दिलेली आकृती सारणी (फिगर मॅट्रीक्स) पूर्ण करण्यासाठी, A, B, C, आणि D या चार पर्यायांपैकी योग्य आकृती निवडा.

DIRECTIONS: Select a suitable figure from the four alternatives that would complete the figure matrix.

ہدایات: دیئے گئے اختیارات میں سے صحیح شکل کو چن کر سلسلہ کو مکمل کیجئے

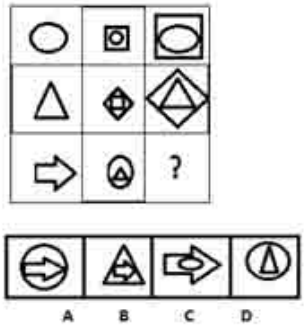

A. (A)

B. (B)

C. (C)

D. (D)

Answer: A. (A)

30 सूचना: दिलेल्या माहितीचा काळजीपूर्वक अभ्यास करा आणि खालील प्रश्नांची उत्तरे द्या:
सात नृत्ये - हिप हॉप, टॅप डान्स, येंग्को डान्स, बेली डान्स, कथक, साल्सा आणि बॅलेट डान्स सलग सात महिने लागोपाठ आयोजित होणार आहेत (जानेवारीपासून सुरु होऊन जुलै अखेर संपत) ते एकाच क्रमाने होतील हे गरजेचे नाही. एका महिन्यामध्ये केवळ एकच नृत्य आयोजित केले जाऊ शकते. बॅलेट डान्सनंतर केवळ दोन नृत्ये आयोजित केली जातील. साल्सा आणि बॅलेट डान्स दरम्यान केवळ दोन नृत्ये आयोजित केली जातील. टॅप डान्स आणि कथक यांच्यातील केवळ तीन नृत्य आयोजित केले जातील. टॅप नृत्य जुलैमध्ये आयोजित होणार नाही. हिप हॉप बेली डान्स आणि यंग्को नृत्यच्या आधी आयोजित केले जाईल (लगेच आधी असतील असे नाही). बेली डान्सनंतर यंग्को डान्स आयोजित केले जाईल (लगेच आधी असतील असे नाही).
जर सर्व सात नृत्ये वर्णमाला क्रमानुसार आयोजित गेली तर मूळ वेळापत्रकच्या तुलनेत कितींची स्तिथी होती तशीच राहील?

DIRECTIONS: Study the given information carefully and answer the given questions:
Seven Dances -Hip Hop, Tap Dance, Yangko Dance, Belly Dance, Kathak, Salsa and Ballet Dance are to be held on seven consecutive months (starting on January and ending on July) not necessarily in the same order. Only one dance can be held on one month. Only two dances will be held after Ballet Dance. Only two dances will be held between Salsa and Ballet Dance. Only three dances will be held between Tap Dance and Kathak. Tap Dance will not be held on July. Hip Hop will be held before Belly Dance and Yangko Dance (not necessarily immediately before). Yangko Dance will be held after Belly Dance (not necessarily immediately after).
If all seven Dances are held in the alphabetical order, the positions of how many will remain unchanged as compared to the original schedule?

ہدایات: مندرجہ ذیل معلومات کو دھیان سے پڑھیں اور دیے گئے سوالوں کے جواب دیں۔
سات ڈانس – ہپ ہاپ، ٹیپ ڈانس، یانگکو ڈانس، بیلے ڈانس، کتھک، سالسا اور بیلے ڈانس سات لگاتار مہینوں (جنوری میں شروع اور جولائی میں ختم ہونے والے) میں منعقد کیے جانے ہیں، جن کا یکساں ترتیب میں ہونا ضروری نہیں ہے۔ ایک مہینہ میں صرف ایک ڈانس منعقد کیا جاسکتا ہے۔ بیلے ڈانس کے بعد صرف دو ڈانس منعقد ہوں گے۔ سالسا اور بیلے ڈانس کے درمیان صرف دو ڈانس منعقد ہوں گے۔ ٹیپ ڈانس اور کتھک کے درمیان صرف تین ڈانس منعقد ہوں گے۔ ٹیپ ڈانس کا انعقاد جولائی میں نہیں ہوگا۔ ہپ ہاپ کا انعقاد بیلی ڈانس اور یانگکو ڈانس سے پہلے ہوگا (فوری طور پر پہلے ضروری نہیں ہے)۔ یانگکو ڈانس بیلی ڈانس کے بعد منعقد ہوگا (فوری طور پر بعد میں ضروری نہیں ہے)۔
اگر سبھی ڈانس کو حروف تہجی کی ترتیب میں منعقد کیا جائے، تو اصل شیڈول کے مقابلے میں کتنوں کی پوزیشن میں کوئی تبدیلی نہیں ہوگی؟

A.तीन
A.Three
A.تین

B.तीनपेक्षा जास्त
B.More than three
B.تین سے زیادہ

C.एक
C.One
C.ایک

D.कोणतेही नाही
D.None
D.کوئی نہیں

Answer: D.कोणतेही नाही
D.None
D.کوئی نہیں

31 विधान:
महिलांमधील प्रमुख दुखापती दुचाकी चालक उच्च दराने वाढत आहेत.

कृतीचा कोर्स:
I. स्त्रियांना दुचाकी चालवण्यापासून परावृत्त केले पाहिजे.
II. महिलांसाठी हेल्मेट अनिवार्य केले पाहिजे.

Statement:
Head injuries among women two wheeler drivers is increasing at a high rate.

Course of actions:
I. Women should be discouraged from riding two wheelers.
II. Helmets should be made compulsory for women

بیان:
ٹو ویلر ڈرائیور خواتین میں سر کی چوٹوں میں تیزی سے اضافہ ہو رہا ہے۔

لائحہ عمل:
I۔ خواتین کے ٹو ویلر چلانے کی حوصلہ شکنی ہونی چاہیے ۔
II۔ خواتین کے لیے ہیلمٹ لازمی قرار دے دینا چاہیے ۔

A.फक्त I अनुसरून आहे
A.Only I follows
A. صرف I لاگو ہو گا۔

B.फक्त II अनुसरण करते आहे
B.Only II follows
B. صرف II لاگو ہو گا۔

C.एकतर I किंवा II अनुसरून आहे
C.Either I or II follows
C. I یا II میں سے ایک لاگو ہو گا۔

D.I किंवा II दोन्हीपैकी काहीही अनुसरण करत नाही
D.Neither I nor II follows
D. I اور II میں سے کوئی بھی لاگو نہیں ہو گا۔

Answer: B.फक्त II अनुसरण करते आहे
B.Only II follows
B. صرف II لاگو ہو گا۔

32 मुलांच्या रांगेत समीर डावीकडून 17 व्या क्रमांकावर तर ज्योती उजवीकडून 15 व्या क्रमांकावर आहे. तर रांगेत एकूण किती मुले आहेत ?

In a row of children Samir is 17th from the left end of the row and Jyoti is 15th from the right end of the row. How many children are there in the row?

بچھوں کی کتار میں سمیر کتار کی بھانیں طرف سے 17 وہ ہے اور جیوتی کتار کی دھانیں طرف سے 15 وی ہے.کتار میں کتنے بچھے ہے؟

A.30
A.30
A.30

B.31
B.31
B.31

C.29
C.29
C.29

D.34
D.34
D.34

Answer: B.31
B.31
B.31

33 Choose the word which is most similar in meaning to the given word.
PRECEDING

A.Previous

B.Later

C.Latter

D.Beyond

Answer: A.Previous

34 ‘शुचिता’ या शब्दाचा विरुद्धार्थी शब्द कोणता ?

A.पावित्र्य

B.शुद्धता

C.अस्वच्छता

D.पारदर्शी

Answer: C.अस्वच्छता

35 Out of the four alternatives, choose the one which can be substituted for the given words/sentence.
A hollow space in a wall for a statue or ornament

A.Niche

B.Effigy

C.Sermons

D.Brick

Answer: A.Niche

36 ऍलिटस धोरण हे एक धोरण आहे जे _____ शोषणाला निषिध्द करते.

Alitus policy is a policy which prohibits _____ harassment

الیٹس پالیسی ، وہ پالیسی ہے _____ اذیت کو روکتی ہے۔

A.शारीरिक शोषण
A.Physical harassment
A.جسمانی

B.मानसिक शोषण
B.Mental harassment
B.ذہنی

C.लैंगिक शोषण
C.Sexual harassment
C.جنسی

D.यापैकी एकही नाही
D.None of these
D. ان میں سے کوئی نہیں

Answer: C.लैंगिक शोषण
C.Sexual harassment
C.جنسی

37 सूचना: दिलेल्या माहितीचा काळजीपूर्वक अभ्यास करा आणि खालील प्रश्नांची उत्तरे द्या:
सात नृत्ये - हिप हॉप, टॅप डान्स, येंग्को डान्स, बेली डान्स, कथक, साल्सा आणि बॅलेट डान्स सलग सात महिने लागोपाठ आयोजित होणार आहेत (जानेवारीपासून सुरु होऊन जुलै अखेर संपत) ते एकाच क्रमाने होतील हे गरजेचे नाही. एका महिन्यामध्ये केवळ एकच नृत्य आयोजित केले जाऊ शकते. बॅलेट डान्सनंतर केवळ दोन नृत्ये आयोजित केली जातील. साल्सा आणि बॅलेट डान्स दरम्यान केवळ दोन नृत्ये आयोजित केली जातील. टॅप डान्स आणि कथक यांच्यातील केवळ तीन नृत्य आयोजित केले जातील. टॅप नृत्य जुलैमध्ये आयोजित होणार नाही. हिप हॉप बेली डान्स आणि यंग्को नृत्यच्या आधी आयोजित केले जाईल (लगेच आधी असतील असे नाही). बेली डान्सनंतर यंग्को डान्स आयोजित केले जाईल (लगेच आधी असतील असे नाही).
जर साल्सा दिलेल्या वेळापत्रकाच्या आधारावर विशिष्ट प्रकारे फेब्रुवारीशी संबंधित असेल. त्याचप्रमाणे, बॅलेट डान्स मे महिन्याशी संबंधित आहे. तशाच प्रकारे, टॅप डान्स खालील कोणत्या महिन्यांशी संबंधित आहे?

DIRECTIONS: Study the given information carefully and answer the given questions:
Seven Dances -Hip Hop, Tap Dance, Yangko Dance, Belly Dance, Kathak, Salsa and Ballet Dance are to be held on seven consecutive months (starting on January and ending on July) not necessarily in the same order. Only one dance can be held on one month. Only two dances will be held after Ballet Dance. Only two dances will be held between Salsa and Ballet Dance. Only three dances will be held between Tap Dance and Kathak. Tap Dance will not be held on July. Hip Hop will be held before Belly Dance and Yangko Dance (not necessarily immediately before). Yangko Dance will be held after Belly Dance (not necessarily immediately after).
If Salsa is related to February in a certain way based on the given schedule. Similarly, Ballet Dance is related to May. In the same way, Tap Dance is related to which of the following months?

ہدایات: مندرجہ ذیل معلومات کو دھیان سے پڑھیں اور دیے گئے سوالوں کے جواب دیں۔
سات ڈانس – ہپ ہاپ، ٹیپ ڈانس، یانگکو ڈانس، بیلے ڈانس، کتھک، سالسا اور بیلے ڈانس سات لگاتار مہینوں (جنوری میں شروع اور جولائی میں ختم ہونے والے) میں منعقد کیے جانے ہیں، جن کا یکساں ترتیب میں ہونا ضروری نہیں ہے۔ ایک مہینہ میں صرف ایک ڈانس منعقد کیا جاسکتا ہے۔ بیلے ڈانس کے بعد صرف دو ڈانس منعقد ہوں گے۔ سالسا اور بیلے ڈانس کے درمیان صرف دو ڈانس منعقد ہوں گے۔ ٹیپ ڈانس اور کتھک کے درمیان صرف تین ڈانس منعقد ہوں گے۔ ٹیپ ڈانس کا انعقاد جولائی میں نہیں ہوگا۔ ہپ ہاپ کا انعقاد بیلی ڈانس اور یانگکو ڈانس سے پہلے ہوگا (فوری طور پر پہلے ضروری نہیں ہے)۔ یانگکو ڈانس بیلی ڈانس کے بعد منعقد ہوگا (فوری طور پر بعد میں ضروری نہیں ہے)۔
اگر دیے گئے شیڈول کی بنیاد پر ایک مخصوص طور سے سالسا فروری سے متعلق ہے۔ اسی طرح، بیلے ڈانس کا تعلق مئی سے ہے۔ تو اسی طریقے سے، ٹیپ ڈانس کا تعلق مندرجہ ذیل کس مہینہ سے ہے؟

A.मार्च
A.March
A.مارچ

B.मे
B.May
B.مئی

C.फेब्रुवारी
C.February
C.فروری

D.जून
D.June
D.جون

Answer: A.मार्च
A.March
A.مارچ

38 आरआइटी याचा अर्थ _____हा आहे.

RIT stands for

ار ای تے کے لئے کھڑا ہے

A.रीवर्स इंक ब्लोट टेस्ट
A.Reverse Ink Blot test
A. ریورس انک بلٹ ٹیسٹ

B.रिमोट इनवेन्टरी टेस्ट
B.Remote inventory tests
B.ریموٹ انوینٹری ٹیسٹ

C.रोर्शचइंक ब्लोट टेस्ट
C.Rorschach Ink Blot test
C.رارچچ انک بلٹ ٹیسٹ

D.रेमन्ड्सइनवेन्टरी टेस्ट
D.Raymond’s inventory tests
D.ریمنڈ کی انوینٹری ٹیسٹ

Answer: C.रोर्शचइंक ब्लोट टेस्ट
C.Rorschach Ink Blot test
C.رارچچ انک بلٹ ٹیسٹ

39 2011 मध्ये ओडीआय (ODI) वर्ल्ड कप जिंकला असताना भारतीय क्रिकेट संघाचा कप्तान कोण होता?

Who was the captain of the Indian Cricket team when it won the ODI World Cup in 2011?

میں جب بھارت نے ون ڈے انٹرنیشنل ورلڈ کپ مقابلہ جیتا، اس وقت بھارتیہ کرکٹ ٹیم کا کپتان کون تھا۲۰۱۱

A.सौरव गांगुली
A.Sourav Ganguly
A.سوربھ گانگولی

B.राहुल द्रविड
B.Rahul Dravid
B.راہل ڈراوڈ

C.एम एस धोनी
C.MS. Dhoni
C.ایم ایس دھونی

D.अनिल कुंबळे
D.Anil Kumble
D.انیل کمبلے

Answer: C.एम एस धोनी
C.MS. Dhoni
C.ایم ایس دھونی

40 रूग्णाचा जैविक मृत्यू म्हणजे याच्या उतकांचा मृत्यू असतो

The biological death of a patient means the death of tissues of the

کسی مریض کی حیاتیاتی موت کا مطلب ہے _____ کے ٹیشوز کی موت

A.मूत्रपिंड
A.Kidney
A.گردہ

B.हृदय
B.Heart
B.قلب

C.मेंदू
C.Brain
C.دماغ

D.फुफ्फुसे
D.Lungs
D.پھیپھڑا

Answer: C.मेंदू
C.Brain
C.دماغ

41 वडिलांचे आताचे वय हे 65 वर्ष आहे आणि मुलाचे 35 वर्ष आहे. तर वडिलांच्या वयाचे मुलाच्या वयाशी असलेले गुणोत्तर शोधा.

Present age of father is 65 years and his son is 35 years old. Find the ratio of the age of the father to age of his son?

باپ کی موجودہ عمر 65 سال ہے اور اس کے بیٹے کی 35 سال ہے۔ اس کے بیٹے کی عمر کے مقابلہ میں باپ کی عمر کا تناسب معلوم کریں؟

A.13:7
A.13:7
A.13:7

B.7:8
B.7:8
B.7:8

C.15:7
C.15:7
C.15:7

D.7:15
D.7:15
D.7:15

Answer: A.13:7
A.13:7
A.13:7

42 13741 × 17=?

13741 × 17=?

13741 × 17=?

A.234617
A.234617
A.234617

B.234597
B.234597
B.234597

C.233607
C.233607
C.233607

	D.233597 D.233597 D.233597
Answer:	D.233597 D.233597 D.233597
43	खालीलपैकी पुल्लिंगी शब्द ओळखा.
	A.वृक्ष
	B.वेल
	C.गवत
	D.झुडूप
Answer:	A.वृक्ष
44	जर $x+\frac{1}{x}=2$, तर $\frac{2x^2+2}{3x^2+5x+3}=?$ If $x+\frac{1}{x}=2$, then $\frac{2x^2+2}{3x^2+5x+3}=?$ اگر $x+\frac{1}{x}=2$ تو پھر $\frac{2x^2+2}{3x^2+5x+3}=?$
	A. 1/2
	B. 1/3
	C. 7/4
	D. खालीलपैकी कोणतेही नाही None of These ان میں سے کوئی نہیں
Answer:	D. खालीलपैकी कोणतेही नाही None of These ان میں سے کوئی نہیں

45 सूचना: खालील प्रश्नांमध्ये दिलेल्या पर्यायांमधून संबंधित अक्षर/शब्द/संख्या निवडा.

दिलेला संच (6, 8, 2)

DIRECTIONS: In the following question, select the related letter/word/number from the given alternatives.

Given set : (6, 8, 2)

سمت: مندرجہ ذیل سوال میں، دیے گئے متبادل سے متعلقہ حرف/لفظ/نمبر منتخب کریں۔

(دیا گیا سیٹ: (6, 8, 2

A.(8, 3, 2)
A.(8, 3, 2)
A.(8, 3, 2)

B.(8, 10, 2)
B.(8, 10, 2)
B.(8, 10, 2)

C.(2, 5, 9)
C.(2, 5, 9)
C.(2, 5, 9)

D.(12, 7, 4)
D.(12, 7, 4)
D.(12, 7, 4)

Answer: B.(8, 10, 2)
B.(8, 10, 2)
B.(8, 10, 2)

46 बुद्ध्यांक गुण हे सामान्यपणे शैक्षणिक कामगिरीशी ____ परस्पर-संबंधित असतात

IQ scores are generally _____ correlated with academic performance

آئی قیو اسکور عام طور پر_____تعلمی کارکردگی کے ساتھ مربوط ہوتی ہے

A.कमीत कमी
A.least
A.کم سے کم

B.पूर्णपणे
B.perfectly
B.درستگی

C.अतिशय जास्त
C.highly
C.بہت زیادہ

D.माफक प्रमाणात
D.moderately
D.معتدل طور پر

Answer: B.पूर्णपणे
B.perfectly
B.درستگی

47 DIRECTIONS: A sentence with an underlined word is given below. Find the word which is opposite in meaning to the underlined word from the given options.
Years of doing meticulous research had made her very precise in her working methods.

A.Vague

B.Exact

C.Accurate

D.Correct

Answer: A.Vague

48 उस्ताद जाकिर हुसेन हे प्रख्यात _____ वादक आहे

Ustad Zakir Hussain is an eminent player of –

استاد ذاکر حسین ایک مشہور کلاکار ہیں :

A.सतार
A.Sitar
A.ستار

B.सरोद
B.Sarod
B.سرود

C.तबला
C.Tabla
C.تبلہ

D.यांपैकी कोणतेही नाही
D.None of these
D.انمیں سے کوئی نہیں

Answer: C.तबला
C.Tabla
C.تبلہ

49 गीर जंगल हे _____ या राज्यामध्ये आहे

The Gir Forest is in the state of -

گِر جنگل صوبہ---- میں ہے :

A.राजस्थान
A.Rajasthan
A.راجستھان

B.गुजरात
B.Gujarat
B.گجرات

C.छत्तीसगढ
C.Chhattisgarh
C.چھتّیس گڑھ

D.ओडीसा
D.Odisha
D.اوڑیشہ

Answer: B.गुजरात
B.Gujarat
B.گجرات

50 'कृत्रिम' या शब्दाचा समानार्थी शब्द कोणता ?

A.नैसर्गिक

B.बनावट

C.अस्सल

D.खरे

Answer: B.बनावट

51	16 एप्रिल 1671 रोजी गुरूवार आहे, 16 एप्रिल 1675 रोजी काय वार असेल? Thursday falls on 16th April 1671, what will be the day on 16th April 1675? 16 اپریل 1671 کو جمعرات ہے، 16 اپریل 1675 کو کونسا دن ہوگا؟
	A.सोमवार A.Monday A.پیر
	B.मंगळवार B.Tuesday B.منگل
	C.बुधवार C.Wednesday C.بدھ
	D.शुक्रवार D.Friday D.جمعہ
Answer:	B.मंगळवार B.Tuesday B.منگل

52	खालीलपैकी अशुद्ध वाक्य कोणते ?
	A.मी निघणार तेवढ्यात आईने मला थांबविले.
	B.पुढच्या वर्षी खूप थंडी पडली होती.
	C.ही बातमी ऐकताच मला फार आनंद झाला.
	D.एक दोन दिवसात पाऊस येणार असे वाटते.
Answer:	B.पुढच्या वर्षी खूप थंडी पडली होती.

53 मनोवृत्तीच्या दोन पायरीची संकल्पना यांनी प्रस्तावित केली

The two step concept of attitude was proposed by

کا تصور _____ کے ذریعہ پیش کیا گیا تھا۔ (two step)’دو قدم رویّے‘

A.एस.एम. मोहसीन
A.S.M. Mohsin
A.S.M. Mohsin

B.सि.एच.राईस
B.C.H. Rice
B.C.H. Rice

C.उदय शंकर
C.Uday Shankar
C.Uday Shankar

D.भाटिया
D.Bhatia
D.Bhatia

Answer: A.एस.एम. मोहसीन
A.S.M. Mohsin
A.S.M. Mohsin

54 सूचना: दिलेल्या पर्यायांमधून वेगळे ते बाहेर काढा.

DIRECTIONS: Find the odd one out from the given alternatives.

سمت: دیے گئے متبادل میں سے بے جوڑ کو تلاش کرو۔

A.वृक्ष : देठ
A.Tree : Stem
A.درخت : تنا

B.चेहरा : डोळा
B.Face : Eye
B.چہرہ : آنکھ

C.चेअर : सायकल
C.Chair : Cycle
C.کرسی : سائیکل

D.रोप : फूल
D.Plant : Flower
D.پودا : پھول

Answer: C.चेअर : सायकल
C.Chair : Cycle
C.کرسی : سائیکل

55 निर्देश: खाली दिलेले प्रश्न वर्ण मालिकेवर आधारित आहेत. या प्रत्येक मालिकेत, काही अक्षरे गहाळ आहेत. योग्य पर्याय निवडा पाच पेक्षा अधिक अक्षरे गहाळ असल्यास, मालिकेतील शेवटचे पाच अक्षरे निवडा .

- - -wx - - wwy - - - wz - - - -

DIRECTION: Questions given below are based on the letter series. In each of these series, some letters are missing. Select the correct alternative. If more than five letters are missing, select the last five letters of the series:

- - -wx - - wwy - - - wz - - - -

ہدایت نیچے دے ہے سوالات حرف سرج پر مشتمل ہیں . ہر میں کہیں حرف گمشدہ ہے . سہی اختیارات کو چنے . اگر پچ حرف گنمام ہو تو آخری پانچ حرفونکو چنے

- - -wx - - wwy - - - wz - - - -

A.zwwyw
A.zwwyw
A.zwwyw

B.zwwww
B.zwwww
B.zwwww

C.zxyzw
C.zxyzw
C.zxyzw

D.zwwwx
D.zwwwx
D.zwwwx

Answer: B.zwwww
B.zwwww
B.zwwww

56

जर '+' म्हणजे ,'×''–' म्हणजे '+','x' म्हणजे '÷'आणि '÷'म्हणजे '–',तर या माहितीवर आधारित पुढील प्रश्नांची उत्तरे द्या.

If '+' means '×', '–' means '+','x' means '÷' and '÷' means '–', then answer the following questions based on this information.

اگر '+' مطلب 'x'، '-' مطلب '+' ، 'x' مطلب '÷' اور '÷' مطلب '-'، تو نیچے لکھے ہوئے سوالوں کے جوابات اس بنیاد پر دیجیئے؟

6 – 9 + 8 × 3 ÷ 20 = ?

A. -2

B. 6

C. 10

D. 12

Answer: C. 10

57

खालीलपैकी सर्वांत लहान अपूर्णांक शोधा

Find the smallest of the following fractions

مندرجہ ذیل کسور میں سے سب سے چھوٹی کسر تلاش کریں

A.5/6
A.5/6
A.5/6

B.23/37
B.23/37
B.23/37

C.51/49
C.51/49
C.51/49

D.43/54
D.43/54
D.43/54

Answer: B.23/37
B.23/37
B.23/37

58 सूचना: खाली दिलेल्या विधान (A) आणि कारण (R) साठी, खालील पैकी योग्य पर्याय निवडा:

विधान (A): आपण विजेचा आवाज ऐकण्याच्या आधी बघतो.
कारण (R): प्रकाशपेक्षा आवाज वेगाने प्रवास करतो.

DIRECTION: For the Assertion (A) and Reason (R) given below, choose the correct alternative from the following:

Assertion (A): We see lighting before hearing it.
Reason (R): Light travels faster than sound.

ہدایت: نیچے دئیے گئے اسرشن (A) اور (R) وجہ کے لئے، مندرجہ ذیل میں سے صحیح متبادل منتخب کریں:

اسرشن (A): ہم سننے سے پہلے روشنی دیکھتے ہیں
وجہ (R): روشنی آواز کے مقابلہ تیزی سے سفر کرتی ہے۔

A.दोन्ही (A) आणि (R) सत्य आहेत आणि (R) (A) च योग्य स्पष्टीकरण आहे
A.Both (A) and (R) are true and (R) is the correct explanation of (A)
A. (A) اور (R) دونوں صحیح ہیں اور (R) (A) کی درست وضاحت ہے

B.दोन्ही (A) आणि (R) खरे आहेत, परंतु (R) (A) च योग्य स्पष्टीकरण नाही
B.Both (A) and (R) are true, but (R) is not the correct explanation of (A)
B. (A) اور (R) دونوں صحیح ہیں، لیکن (R) (A) کی درست وضاحت نہیں ہے

C.(A) सत्य आहे, परंतु (R) खोटे आहे
C.(A) is true, but (R) is false
C. (A) صحیح ہے، لیکن (R) غلط ہے

D.(A) खोटे आहे, परंतु (R) सत्य आहे
D.(A) is false, but (R) is true
D. (A) غلط ہے، لیکن (R) صحیح ہے

Answer: A.दोन्ही (A) आणि (R) सत्य आहेत आणि (R) (A) च योग्य स्पष्टीकरण आहे
A.Both (A) and (R) are true and (R) is the correct explanation of (A)
A. (A) اور (R) دونوں صحیح ہیں اور (R) (A) کی درست وضاحت ہے

59 जर पुस्तकाला वर्तमानपत्र म्हटले, वर्तमानपत्राला शब्दकोश म्हटले, शब्दकोशाला टीव्ही म्हटले, टीव्हीला मासिक म्हटले आणि मासिकाला कॉम्प्युटर म्हटले. तर एखाद्या शब्दाचा अर्थ शोधण्यासाठी आपण खालीलपैकी कोणती वस्तू वापरु शकतो?

If book is called newspaper, newspaper is called dictionary, dictionary is called television, television is called magazine and magazine is called computer. Which of the following we can use find the meaning of a word?

اگر کتاب کو اخبار، اخبار کو لغت، لغت کو ٹیلی ویژن، ٹیلی ویژن کو رسالہ اور رسالے کو کمپیوٹر کہا جائے تو ہم مندرجہ ذیل الفاظ کے معانی تلاش کرنے کے لیے کسکو استعمال کرتے ہیں؟

A.कॉम्प्युटर
A.Computer
A.کمپیوٹر

B.शब्दकोश
B.Dictionary
B.لغت

C.पुस्तक
C.Book
C.کتاب

D.टीव्ही
D.Television
D.ٹیلی ویژن

Answer: D.टीव्ही
D.Television
D.ٹیلی ویژن

60 भारतीय नोबेल पुरस्कार विजेते निवडा?

Choose the Indian Nobel Prize Winners?

کس بھارتیہ کو نوبل انعام ملا ہے :

A.कैलाश सत्यार्थी
A.Kailash Satyarthi
A.کیلاش ستیارتھی

B.अमर्त्य सेन
B.Amartya Sen
B.امریتا سین

C.वरीलपैकी दोन्ही
C.Both of the above
C.دونوں کو

D.यांपैकी कोणतेही नाही
D.None of these
D.انمیں سے کوئی نہیں

Answer: C.वरीलपैकी दोन्ही
C.Both of the above
C.دونوں کو

61	5, 4, 7 व 4 ची सरासरी आहे: The average of 5, 4, 7 and 4 is: 5,4,7 اور 4 کا اوسط ہے
	A.6 A.6 A.6
	B.2 B.2 B.2
	C.5 C.5 C.5
	D.8 D.8 D.8
Answer:	C.5 C.5 C.5
62	$(196)^6 \times (14)^{18} = (14)^?$ $(196)^6 \times (14)^{18} = (14)^?$ $(196)^6 \times (14)^{18} = (14)^?$
	A.30 A.30 A.30
	B.16 B.16 B.16
	C.64 C.64 C.64
	D.25 D.25 D.25

Answer: A.30
A.30
A.30

63 दिलेली अदलाबदल : चिन्हे + आणि ÷ , तसेच आकडे 12 आणि 6 ; तर 12 + 6 × 5 ÷ 2– 3 चे मूल्य किती ?

Given interchanges: signs + and ÷, and numbers 12 and 6; then the value of 12 + 6 × 5 ÷ 2 - 3 is

دیئے گئے تبادلے: علامات + اور ÷، اور نمبر 12 اور 6؛ تو 12 + 6× 5 ÷ 2 - 3کی تعداد ہے

A.2.5
A.2.5
A.2.5

B.1.5
B.1.5
B.1.5

C.3
C.3
C.3

D.0.5
D.0.5
D.0.5

Answer: B.1.5
B.1.5
B.1.5

64 सूचना: दिलेल्या पर्यायांमधून वेगळे ते बाहेर काढा.

DIRECTIONS: Find the odd one out from the given alternatives.

سمت: دیے گئے متبادل میں سے بے جوڑ کو تلاش کرو۔

A.डील
A.Deal
A.ڈیل

B.सील
B.Seal
B.سیل

C.झील
C.Zeal
C.زیل

D.रीअल
D.Real
D.ریل

Answer: D.रीअल
D.Real
D.ریل

65 सूचना: खालील प्रश्नांमध्ये दिलेल्या पर्यायांमधून संबंधित अक्षर/शब्द/संख्या निवडा.

संगीत : चाल ::

DIRECTIONS: In the following question, select the related letter/word/number from the given alternatives.

MUSIC : TUNE ::

سمت: مندرجہ ذیل سوال میں، دیے گئے متبادل سے متعلقہ حرف/لفظ/نمبر منتخب کریں۔

میوزک : ٹیون ::

A.खेळ : क्रिकेट
A.Game : Cricket
A.گیم : کرکٹ

B.काव्य : नृत्य
B.Poetry: Dance
B. شاعری : رقص

C.नृत्य : ताल
C.Dance : Rhythm
C.ڈانس : تال

D.धर्म : अन्न
D.Religion : Food
D.مذہب : کھانا

Answer: C.नृत्य : ताल
C.Dance : Rhythm
C.ڈانس : تال

66 अनुक्रमे 3 सेंमी, 4 सेंमी आणि 5 सेंमी या त्रिकोणाच्या बाजू आहेत. त्रिकोणाच्या बाजूंचे मध्यबिंदू जोडल्यास तयार झालेल्या त्रिकोणाचे क्षेत्रफळ काय असेल?

The sides of a triangle are respectively 3 cm, 4 cm and 5 cm. What is the area of the triangle formed by joining midpoint of sides of the triangle?

ایک مثلث کی طرفیں بالترتیب 3، 4، اور 5 سینٹی میٹر ہیں۔ مثلث کی طرفوں کے بیچ کے نقطہ کو جوڑ کر مثلث کا کیا رقبہ بنتا ہے؟

A.6 सेंमी^{2}
A.6 cm^2
A.6 مربع سینٹی میٹر

B.3 सेंमी^{2}
B.3 cm^2
B.3 مربع سینٹی میٹر

C.3/2 सेंमी^{2}
C.3/2 cm^2
C.3/2 مربع سینٹی میٹر

D.3/4 सेंमी^{2}
D.3/4 cm^2
D.3/4 مربع سینٹی میٹر

Answer: C.3/2 सेंमी^{2}
C.3/2 cm^2
C.3/2 مربع سینٹی میٹر

67 सूचना: खालील प्रश्नांमध्ये दिलेल्या पर्यायांमधून संबंधित अक्षर/शब्द/संख्या निवडा.

6 : 222 :: 9 : ?

DIRECTIONS: In the following question, select the related letter/word/number from the given alternatives.

6 : 222 :: 9 : ?

سمت: مندرجہ ذیل سوال میں، دیے گئے متبادل سے متعلقہ حرف/لفظ/نمبر منتخب کریں۔

6 : 222 :: 9 : ?

A.210
A.210
A.210

B.336
B.336
B.336

C.343
C.343
C.343

D.333
D.333
D.333

Answer: D.333
D.333
D.333

68 व्याख्यान करत असताना आपण एकतर्फे पणा दूर करण्यासाठी आपण कोणत्या पद्धतीचा अवलंब करू इच्छिता?

If you are interested to eliminate lopsidedness in lecture method what method would you like to adopt?

اگر آپ لیکچر کے طریقہ کار میں عدم تناسب کو ختم کرنے میں دلچسپی رکھتے ہیں تو آپ کو کونسا طریقہ اختیار کرنا ہوگا؟

A.आपण काही विनोद आणू
A.You will instill humorous feelings in it
A.آپ اس میں مزاحیہ جذبات کو آزمائیں گے

B.आपण विषयाला अत्यंत प्रेरणादायी बनवू
B.You will change it as highly motivational
B.آپ اسے انتہائی ترغیب کے طور پر تبدیل کردیں گے

C.आपण प्रात्यक्षिक जोडू
C.You will add it with demonstration
C.آپ اس میں ڈیمانسٹریشن شامل کریں گے

D.आपण विषयास अधिक तथ्यात्मक बनवू
D.You will make it more factual
D.آپ اسے مزید حقیقت پسندانہ بناؤ گے

Answer: C.आपण प्रात्यक्षिक जोडू
C.You will add it with demonstration
C.آپ اس میں ڈیمانسٹریشن شامل کریں گے

69 अनुक्रम: 8, 16, 24, 32..... चे 8वे पद शोधा

Find the 8th term of the sequence: 8, 16, 24, 32.....

32 ,24 ,16 ,8 :؟ اس سرج کی آٹھوی ٹرم کیا ہے.....

A.60
A.60
A.60

B.64
B.64
B.64

C.68
C.68
C.68

D.72
D.72
D.72

Answer: B.64
B.64
B.64

70 गुणाकार करा:
5375 × 756 = ?

Multiply:
5375 × 756 = ?

ضرب دیں:
5375 × 756 = ?

A.4063500
A.4063500
A.4063500

B.4577500
B.4577500
B.4577500

C.3434550
C.3434550
C.3434550

D.5456500
D.5456500
D.5456500

Answer: A.4063500
A.4063500
A.4063500

71 **सूचना:** दिलेल्या पर्यायांमधून श्रेणी पूर्ण करणारी योग्य आकृती निवडा.

DIRECTIONS: Complete the series by choosing right figure from the given choices.

ہدایات: دیئے گئے اختیارات میں صحیح شکل کا انتخاب کر کے سیریز کو مکمل کیجیئے۔

Problem Figures

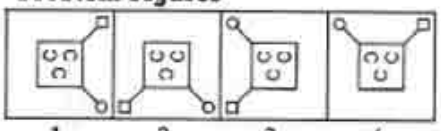

1 2 3 4

Answer Figures

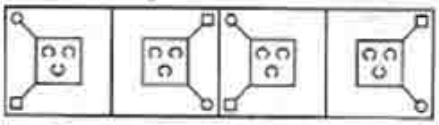

(A) (B) (C) (D)

A. (A)

B. (B)

C. (C)

D. (D)

Answer: D. (D)

72 **सूचना:** दिलेल्या चारांपैकी वेगळी (असंबद्ध) असणारी आकृती शोधून काढा.

DIRECTIONS: Find the odd figures from the given four figures.

ہدایات: دیئے گئے چار شکلوں میں سے طاق شکل کونسی ہے؟

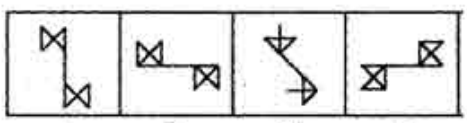

A B C D

A. (A)

B. (B)

C. (C)

D. (D)

Answer: C. (C)

73 विधान:
सार्वजनिक क्षेत्रातील युनिट्स कायम राखण्यासाठी महाग होत आहेत.

कृतीचा कोर्स:
I. सर्व सार्वजनिक क्षेत्रातील युनिट विकली जावीत.
II. सर्व नुकसानकारी सार्वजनिक क्षेत्रातील युनिट विकली पाहिजे.

Statement:
Public sector units are becoming increasingly expensive to maintain.

Course of actions:
I. All of the public sector units should be sold.
II. All the loss making public sector units should be sold

بیان:
پبلک سیکٹر کے یونٹ برقرار رکھنا مسلسل مہنگا ہوتا جا رہا ہے۔

لائحہ عمل:
I۔تمام پبلک سیکٹر یونٹ بیچ دینے چاہیئں
II۔ نقصان میں جانے والے تمام پبلک سیکٹر یونٹ بیچ دینے چاہیئں ۔

A.फक्त I अनुसरून आहे
A.Only I follows
A. صرف I لاگو ہو گا۔

B.फक्त II अनुसरण करते आहे
B.Only II follows
B. صرف II لاگو ہو گا۔

C.एकतर I किंवा II अनुसरून आहे
C.Either I or II follows
C. I یا II میں سے ایک لاگو ہو گا۔

D.I किंवा II दोन्हीपैकी काहीही अनुसरण करत नाही
D.Neither I nor II follows
D. I اور II میں سے کوئی بھی لاگو نہیں ہو گا۔

Answer: D.I किंवा II दोन्हीपैकी काहीही अनुसरण करत नाही
D.Neither I nor II follows
D. I اور II میں سے کوئی بھی لاگو نہیں ہو گا۔

74 खालीलपैकी कोणत्या कणाने अणू तयार होतात?

Which of the following particles constitute atom?

مندرجہ ذیل میں سے کونسے ذرات ایٹم کو تشکیل دیتے ہیں؟

A.इलेक्ट्रॉन
A.Electrons
A.الیکٹرون

B.प्रोटॉन
B.Protons
B.پروٹون

C.न्यूट्रॉन
C.Neutrons
C.نیوٹرون

D.वरलपैकी सर्व
D.All of the above
D.ان میں سے سبھی

Answer: D.वरलपैकी सर्व
D.All of the above
D.ان میں سے سبھی

75 वनस्पतीचा कोणता भाग सलगम आहे?

Which part of the plant is turnip?

پودہ کا کونساحصہ شلجم ہوتا ہے؟

A.मूळ
A.Root
A.جڑ

B.फुल
B.Flower
B.پھول

C.देठ
C.Stem
C.تنا

D.फळ
D.Fruit
D.پھل

Answer:	A.मूळ A.Root A.جڑ

76	DIRECTIONS: A sentence with an underlined phrasal verb is given below. Out of the four options, choose the one which can be substituted for the given phrasal Verb. Mr. Sen’s appartment has been broken into thrice, even though he had good locks on the door.
	A.renewed
	B.painted
	C.entered forcibly
	D.plastered
Answer:	C.entered forcibly

77	भारताचा राष्ट्रीय पक्षी कोणता आहे – The National Bird of India is – بھارت کا قومی پرندہ ہے :
	A.फ्लेमिंगो A.Flamingo A.فلےمنگو
	B.मोर B.Peacock B.مور
	C.चिमणी C.Sparrow C.چڑیا
	D.गरूड D.Eagle D.عقاب
Answer:	B.मोर B.Peacock B.مور

78 पृष्ठवंशीय प्राणी वर्ग आहेत

Classes of Vertebrates are

ورٹی بریٹس Vertebrates کی قسمیں ہیں

A.सस्तन प्राणी आणि पक्षी
A.Mammals and birds
A. ستنداریوں اور پرندوں

B.मासे आणि सरपटणारे प्राणी
B.Fish and reptiles
B. مچھلی اور رینگنے والے جانور

C.उभयचर प्राणी
C.Amphibians
C. ایمپھبئ بیانس

D.वरीलपैकी सर्व
D.All of the above
D. مندرجہ بالا سب

Answer:

D.वरीलपैकी सर्व
D.All of the above
D. مندرجہ بالا سب

79 एका मुलीकडे बोट दाखवून, मोहित म्हणतो, “ही मुलगी माझ्या वडिलांच्या एकुलत्या मुलाची मुलगी आहे” मग मोहितच्या पत्नीचे त्या मुलीसोबत नाते काय?

Pointing towards a girl, Mohit says, “This girl is the daughter of only child of my father.” What is the relation of Mohit’s wife to that girl?

لڑکی کی طرف اشارہ کرکے،موہت نے کہا،" یے لڑکی میرے باپ کے واحد بچے کی بیٹی ہے." موہت کی بیوی کا اس لڑکی سے کیا رشتہ تھا؟

A.मुलगी
A.Daughter
A.بیٹی

B.आई
B.Mother
B.ماں

C.काकू
C.Aunt
C.خالہ

D.बहीण
D.Sister
D.بہن

Answer: B.आई
B.Mother
B.ماں

80 Out of the given options which best expresses the meaning of the given Proverb?
Strike while the iron is hot.

A.Take full and prompt advantage of any of the favourable circumstances

B.When the metal is hot it is most tough

C.Hammers can be made from hot iron

D.It is always advisable to stay away from a person when he is in a furious mood

Answer: A.Take full and prompt advantage of any of the favourable circumstances

81 बुद्धी शब्द _____ भाषेतून आला

The word Buddhi comes from _____ language

لفظ 'بُدھی' _____ زبان سے ماخوذ ہے

A.हिन्दी
A.Hindi
A.ہندی

B.संस्कृत
B.Sanskrit
B.سنسکرت

C.उर्दू
C.Urdu
C.اردو

D.मराठी
D.Marathi
D.مراٹھی

Answer:	B.संस्कृत B.Sanskrit B.سنسکرت

82	Fill in the blank with the correct article. I'm learning to play _____piano.
	A.the
	B.a
	C.an
	D.No article required
Answer:	A.the

83 सूचना: अर्थपूर्ण परिच्छेद निर्माण करण्यासाठी, खाली दिलेली (P), (Q) (R), (S) आणि (T) ही पाच वाक्ये योग्य अनुक्रमाने पुनर्रचना करा; त्यांनतर खालील प्रश्नांची उत्तर द्या.

P. कुरुप बदकाकडे पाहून, अन्य सर्व बदक त्याची मजा घेत होते. त्यामुळे नाराज होऊन, बिचारा बदक शेतातून जवळच्या नदीकडे पळाला.
Q. तो नदीत बुडून मरायचा विचार करतो, पण नदीत, कुरूप नव्हे तर एका सुंदर हंसाचे आपले प्रतिबिंब पाहून तो विचार सोडून देतो.
R. दहांपैकी ९ बदके आपल्या आईसारखी दिसत होती. पण दहावे बदक मोठा, राखाडी आणि कुरूप दिसत होता.
S. एका शेतकऱ्याकडे एक बदक होता, त्याने १० अंडी घातली. लवकरच ती सर्व अंडी उबवली.
T. नदीमध्ये जेथे त्याला बुडायची इच्छा होती तिथे त्याला सुंदर, सफेद हंस दिसतात.

पुनर्रचना केल्यानंतर खालीलपैकी कोणते वाक्य चौथे असेल?

DIRECTION: Rearrange the following five sentences (P), (Q), (R), (S) and (T) in the proper sequence to form a meaningful paragraph; then answer the questions given below them.
P. All the other ducklings made fun of the ugly one. Unhappy in the farm, the poor duckling ran away to a river nearby.
Q. It bends to drown but abandons the idea when sees its reflection in the river, which was not an ugly duckling, but a beautiful swan!
R. Of the ten, nine ducklings looked like the mom. The tenth one was big, grey and ugly.
S. A farmer had a duck, which laid ten eggs. Soon, they all hatched.
T. At the river, where it wanted to get drowned, it sees white, beautiful swans.

Which of the following should be the FOURTH sentence after rearrangement?

ہدایات: ان پانچ جملوں (P)، (Q)، (R)، (S) اور (T) کو با معنی پیرا بنانے کے لئے دوبارہ ترتیب دیجئے، پھر نیچے دے گئے سوالوں کے جواب دیجئے

P. سارے بطخ کے چوزے بدصورت والے کہ مذاک اڈا رہے تھے. کھیت میں ناراض، بیچارہ چوزہ نزدیک کے دریا پی گیا.
Q. یہ ڈھوبنے کے لئے نیچے جکا اور ارادہ مستراق کر دیا جب اسنے دریا میں پرچھائ دیکھی، جو بدصورت چوزہ نہیں تھا، بلکہ ایک خوبصورت ہنس تھا!
R. دس میں سے، نو چوزے اپنی ماں کی طرح تھے. دسوا والا بڈا ، کالا اور بدصورت تھا.
S. زمیندار کے پاس ایک بطخ تھی، جسنے دس انڈے دیے. جلدی ، انسے چوزے نکلے.
T. دریا پی، جہاں یہ ڈھوبنا چاہتا تھا، اسنے سفید، خوبصورت ہنس دیکھا.

دوبارہ ترییب دینے کے بعد کون سا جملہ چوتھا ہونا چاہیے؟

A.T
A.T
A.T

B.S
B.S
B.S

C.P
C.P
C.P

D.Q
D.Q
D.Q

Answer: A.T
A.T
A.T

84 प्रकाश पश्चिमेला 30 मीटर चालत गेला, डावीकडे वळला आणि 20 मीटर चालला. तो पुन्हा डावीकडे वळला आणि 30 मीटर चालत गेला. मग तो उजवीकडे वळला आणि थांबला. तर तो जेव्हा थांबला तेव्हा त्याचे तोंड कुठल्या दिशेला होते?

Prakash walked 30 meters towards West; he took a left turn and walked 20 meters. He again took a left turn and walked 30 meters. He then took a right turn and stopped. Towards which direction was he facing when he stopped?

پرکاش مغرب کی طرف 30 میٹر چلا، بائیں مڑا اور 20 میٹر چلا۔ وہ پھر بائیں مڑا اور 30 میٹر چلا۔ پھر وہ دائیں مڑا اور رک گیا۔ رکنے کے وقت اس کا رخ کس سمت میں تھا؟

A.दक्षिण
A.South
A.جنوب

B.उत्तर
B.North
B.شمال

C.पूर्व
C.East
C.مشرق

D.अपुरी माहिती
D.West
D.ڈیٹا کافی نہیں ہے

Answer: A.दक्षिण
A.South
A.جنوب

85 रुही (एक मुलगी) रिषिका (एक मुलगी) हिला म्हणते, “तुमच्या भावाचे वडील हे माझ्या आईचे पती आहेत.” मग रुहीचे रिषिकाच्या वडीलांसोबत नाते काय?

Ruhi (a girl) said to Rishika (a girl),” Your brother’s father is my mother’s husband. How Ruhi is related to Rishika’s father ?

روحی (ایک الدکی) نے ریشکا سے کہا (ایک لڑکی) ،" تمہارے بھائی کا باپ میری ماں کا شوہر ہے." روحی کا ریشکا کے باپ سے کیا رشتہ تھا؟

A.बहीण
A.Sister
A.بہن

B.मुलगी
B.Daughter
B.بیٹی

C.पुतणी
C.Niece
C.بھانجی

D.काकू
D.Aunt
D.چا چی

Answer: B.मुलगी
B.Daughter
B.بیٹی

86 सूचना: खालील प्रत्येक प्रश्नात, तीन विधाने दिली आहेत, ज्यांच्यानंतर चार निष्कर्ष आहेत ज्यांना I, II, III आणि IVअसे अंकित केले आहे. सर्वसामान्यपणे ज्ञात असलेल्या तथ्यांशी विसंगती असली तरीही, हे सत्य असल्याचे तात्पुरते मानून, सामान्यतः ज्ञात असलेल्या तथ्यांकडे दुर्लक्ष करून, दिलेल्या निष्कर्षांपैकी कोणती तर्कशुद्धपणे विधानांचे अनुसरण करतात ते ठरवा.
विधाने :
काही शर्ट विजारी आहेत.
काही विजारी शॉर्ट्स नसतात.
सर्व शोर्ट्स महाग असतात.
निष्कर्ष:
I. काही शर्ट शोर्ट्स असतात.
II. कोणताही शर्ट महाग नसतो.
III. काही विजारी शोर्ट्स असतात.
IV. काही मागड्या विजारी असतात.

DIRECTION: In each of the following questions, three statements followed by four conclusions marked I, II, III and IV are given. Consider the statements to be true, even though they seem to be at variance with the commonly known facts and find out which of the given conclusion(s) logically fallow(s) the statements, disregarding the commonly known facts.

Statements:
Some shirts are trousers.
Some trousers are not shorts.
All shorts are costly.

Conclusions:
I. Some shirts are shorts.
II. No shirt is costly.
III. Some trousers are shorts.
IV. Some costly are trousers.

ہدایت: مندرجہ ذیل ہر ایک سوال میں، تین بیانات دیے گئے ہیں جن کے بعد چار نتائج دیے گئے ہیں جنھیں I، II، III اور IV سے نشان زد کیا گیا ہے۔ بیانات کے درست ہونے پر غور کریں، اگرچہ وہ عام طور پر معلوم حقائق کے برعکس نظر آتے ہوں اور تلاش کریں کہ کون سے دیے گئے نتائج منطقی طور پر بیانات کی پیروی کرتے ہیں، عام طور پر معلوم حقائق سے قطع نظر۔
بیانات:
کچھ قمیص پتلون ہیں۔
کچھ پتلون نیکر نہیں ہیں۔
سبھی نیکر قیمتی ہیں۔

حل:
I. کچھ قمیص نیکر ہیں۔
II. کوئی قمیص قیمتی نہیں ہے۔
III. کچھ پتلون نیکر ہیں۔
IV. کچھ قیمتی پتلون ہیں۔

A.केवळ निष्कर्ष I निघत असल्यास.
A.Only I follows
A.صرف I پیروی کرتا ہے

B.केवळ निष्कर्ष II निघत असल्यास.
B.Only II follows
B.صرف II پیروی کرتا ہے

C.केवळ निष्कर्ष I आणि II निघत असल्यास.
C.Only I and II follow
C.(c) صرف I اور II پیروی کرتے ہیں۔

D.कोणतेही निष्कर्ष निघत नसल्यास.
D.None follows
D.کوئی مطابق نہیں ہے

Answer: D.कोणतेही निष्कर्ष निघत नसल्यास.
D.None follows
D.کوئی مطابق نہیں ہے

87 DIRECTIONS: A sentence with an underlined phrasal verb is given below. Out of the four options, choose the one which can be substituted for the given phrasal Verb.
The soldier laid down his life for the country.

A.saved

B.betrayed

C.sacrificed

D.stole

Answer: C.sacrificed

88 **निर्देश:** खालील प्रत्येक प्रश्नांमध्ये प्रश्न चिन्हाच्या (?) जागी कोणते अंदाजे मूल्य यायला हवे?

DIRECTIONS: What approximate value should come in place of question mark (?) in each of the following question?

ہدایات: مندرجہ ذیل سوال میں سوال کا نشان (?) کی جگہ پر کون سا تخمینہ ویلیو آئے گا۔

$28.74 \times 124 \div \sqrt{26} = ?$

A. 600

B. 650

C. 720

D. 626

Answer: C. 720

89	फळे आणि भाज्या आपल्याला काय देतात? What do fruit and vegetable provide us? پھل اور سبزی ہمیں کیا فراہم کرتی ہے؟
	A.भरडा A.Roughage A.غذائي ريشے
	B.खनिज B.Minerals B.معدنيات
	C.जीवनसत्व C.Vitamins C.وٹامن
	D.वरीलपैकी सर्व D.All of the above D.ان میں سے سبھی
Answer:	D.वरीलपैकी सर्व D.All of the above D.ان میں سے سبھی
90	‘ सूर्याची सहस्त्र किरणे पृथ्वीवर अवतरली.’ या वाक्यातील विशेषण ओळखा.
	A.सूर्याची
	B.सहस्त्र
	C.किरणे
	D.अवतरली
Answer:	B.सहस्त्र

91 सरळ रूप द्या:
5.62 + 112.8304 + 4321.4321 + 9219.7860 + 542.3256 = ?

Simplify:
5.62 + 112.8304 + 4321.4321 + 9219.7860 + 542.3256 = ?

آسان بنائیں:
5.62 + 112.8304 + 4321.4321 + 9219.7860 + 542.3256= ?

A.14301.9941
A.14301.9941
A.14301.9941

B.14201.9941
B.14201.9941
B.14201.9941

C.14401.9941
C.14401.9941
C.14401.9941

D.14391.9941
D.14391.9941
D.14391.9941

Answer: B.14201.9941
B.14201.9941
B.14201.9941

92 सूचना: खालील प्रश्नांमध्ये दिलेल्या पर्यायांमधून संबंधित अक्षर समूह निवडा.

AXZC: ? :: HUWJ: MPRO

DIRECTIONS: In the following question, select the related group of letters from the given alternatives.

AXZC: ? :: HUWJ: MPRO

سمت: مندرجہ ذیل سوال میں، دیے گئے متبادل میں سے حروف کا متعلقہ گروپ منتخب کریں۔

AXZC: ? :: HUWJ: MPRO

A.FPGY
A.FPGY
A.FPGY

B.FDEH
B.FDEH
B.FDEH

C.FPZG
C.FPZG
C.FPZG

D.FPHY
D.FPHY
D.FPHY

Answer: B.FDEH
B.FDEH
B.FDEH

93 खालील आकृतीमध्ये किती चौरस आहेत?

How many squares are there in the following figure?

نیچے دی ہوئی شکل میں کتنے مربع ہیں؟



A. 24

B. 25

C. 26

D. 27

Answer: C. 26

94 सूचना: अर्थपूर्ण परिच्छेद निर्माण करण्यासाठी, खाली दिलेली (P), (Q) (R), (S) आणि (T) ही पाच वाक्ये योग्य अनुक्रमाने पुनर्रचना करा; त्यांनतर खालील प्रश्नांची उत्तर द्या.

P. कुरुप बदकाकडे पाहून, अन्य सर्व बदक त्याची मजा घेत होते. त्यामुळे नाराज होऊन, बिचारा बदक शेतातून जवळच्या नदीकडे पळाला.
Q. तो नदीत बुडून मरायचा विचार करतो, पण नदीत, कुरूप नव्हे तर एका सुंदर हंसाचे आपले प्रतिबिंब पाहून तो विचार सोडून देतो.
R. दहांपैकी ९ बदके आपल्या आईसारखी दिसत होती. पण दहावे बदक मोठा, राखाडी आणि कुरूप दिसत होता.
S. एका शेतकऱ्याकडे एक बदक होता, त्याने १० अंडी घातली. लवकरच ती सर्व अंडी उबवली.
T. नदीमध्ये जेथे त्याला बुडायची इच्छा होती तिथे त्याला सुंदर, सफेद हंस दिसतात.

पुनर्रचना केल्यानंतर खालीलपैकी कोणते वाक्य पहिले असेल?

DIRECTION: Rearrange the following five sentences (P), (Q), (R), (S) and (T) in the proper sequence to form a meaningful paragraph; then answer the questions given below them.
P. All the other ducklings made fun of the ugly one. Unhappy in the farm, the poor duckling ran away to a river nearby.
Q. It bends to drown but abandons the idea when sees its reflection in the river, which was not an ugly duckling, but a beautiful swan!
R. Of the ten, nine ducklings looked like the mom. The tenth one was big, grey and ugly.
S. A farmer had a duck, which laid ten eggs. Soon, they all hatched.
T. At the river, where it wanted to get drowned, it sees white, beautiful swans.

Which of the following should be the FIRST sentence after rearrangement?

ہدایات: ان پانچ جملوں (P)، (Q)، (R)، (S) اور (T) کو با معنی پیرا بنانے کے لئے دوبارہ ترتیب دیجئے، پھر نیچے دے گئے سوالوں کے جواب دیجئے

P. سارے بطخ کے چوزے بدصورت والے کہ مذاک اڈا رہے تھے. کھیت میں ناراض، بیچارہ چوزہ نزدیک کے دریا پی گیا.
Q. یہ ڈھوبنے کے لئے نیچے جکا اور ارادہ مستراق کر دیا جب اسنے دریا میں پرچھائ دیکھی، جو بدصورت چوزہ نہیں تھا، بلکہ ایک خوبصورت ہنس تھا!
R. دس میں سے، نو چوزے اپنی ماں کی طرح تھے. دسوا والا بڈا ، کالا اور بدصورت تھا.
S. زمیندار کے پاس ایک بطخ تھی، جسنے دس انڈے دیے. جلدی ، انسے چوزے نکلے.
T. دریا پی، جہاں یہ ڈھوبنا چاہتا تھا، اسنے سفید، خوبصورت ہنس دیکھا.

دوبارہ ترییب دینے کے بعد کون سا جملہ پہلے ہونا چاہیے؟

A.S
A.S
A.S

B.P
B.P
B.P

C.Q
C.Q
C.Q

D.R
D.R
D.R

Answer: A.S
A.S
A.S

95 निर्देश: खालीदिलेल्या अक्षराच्या क्रमात काही अक्षरे गहाळ केली आहेत ते त्या क्रमाने खाली दिलेल्या पर्यायांपैकी एक आहे
ab _ ccabc _ c _ bcc__

DIRECTIONS: In each of the following letter series, same of the letters are missing which are given in that order as one of the alternatives below it.

ab _ ccabc _ c _ bcc__

دایت جیل کے حرف سرج میں کوئی حرف گمشدہ ہے آپکو انکی شناخت جیل کے اختیارات سے کرنی ہے

ab _ ccabc _ c _ bcc__

A.ccac
A.ccac
A.ccac

B.cccc
B.cccc
B.cccc

C.abac
C.abac
C.abac

D.abcc
D.abcc
D.abcc

Answer: A.ccac
A.ccac
A.ccac

96	(9)3 + (2)3 + 3(9 × 2)11= ? $(9)^3 + (2)^3 + 3(9 \times 2)11 = ?$ (9)3 + (2)3 + 3(9 × 2)11= ?
	A.625 A.625 A.625
	B.700 B.700 B.700
	C.765 C.765 C.765
	D.1331 D.1331 D.1331
Answer:	D.1331 D.1331 D.1331
97	शिक्षक स्लाइड प्रक्षेपण सोबत हे करण्याचा प्रयत्न करतात The teacher makes an attempt along with the projection of the slide for — ٹیچر سلائڈ کے پروجیکشن کے ساتھ ساتھ کوشش کرتا ہے -
	A.शिकवताना योग्य आणि संबंधित मिश्रणे दाखवणे A.Adequate and relevant mixing of the exhibit in teaching A.تعلیم میں نمائش کا مناسب اور متعلقہ استعمال
	B.विद्यार्थ्यांचे मनोरंजन B.Entertainment of the students B.طالب علموں کی تفریح
	C.विद्यार्थ्यांना प्रेरणा देणे C.Motivation of the students C.طالب علموں کی حوصلہ افزائی
	D.वरील काहीही नाही D.None of the above D.اوپر میں سے کوئی نہیں

Answer: A.शिकवताना योग्य आणि संबंधित मिश्रणे दाखवणे
A.Adequate and relevant mixing of the exhibit in teaching
A.تعلیم میں نمائش کا مناسب اور متعلقہ استعمال

98 12:46 ला मिनिट आणि तास काट्यादरम्यान कोणता कोण असेल?

What is the angle between minute and hour hand at 12:46?

12:46 بجے منٹ اور گھنٹہ کی سوئیاں کونسا زاویہ بناتی ہیں؟

A.97°
A.97°
A.97°

B.107°
B.107°
B.107°

C.153°
C.153°
C.153°

D.7°
D.7°
D.7°

Answer: B.107°
B.107°
B.107°

99 जर नि:पक्षपाती फासे एकत्रितरित्या फेकले तर किमान एक 6 मिळण्याची संभाव्यता असते

The probability of getting at least one 6 when three unbiased dice are thrown together is

کم از کم ایک 6 حاصل کرنے کا امکان ہے جب تین غیر جانبدار ڈائس پھینکی جائیں

A.71/216
A.71/216
A.71/216

B.91/216
B.91/216
B.91/216

C.1/72
C.1/72
C.1/72

D.5/216
D.5/216
D.5/216

Answer: B.91/216
B.91/216
B.91/216

100 **सूचना:** खालील प्रश्नात एक उघडलेला फासा दाखविला आहे. उत्तराच्या पर्यायांपैकी कोणता पर्याय ● या चिन्हाच्या विरुद्ध बाजूला येईल?

DIRECTIONS: In the following question an unfolded dice is given . From the given alternatives which of the following will be opposite of ● ?

ہدایات: نیچے کے سوال میں ایک بغیر فولڈ کیا ہوا پاسہ دیا گیا ہے، دیئے گئے متبادلات میں سے کونسی نیچے والی شکل اپوزٹ ہوگی

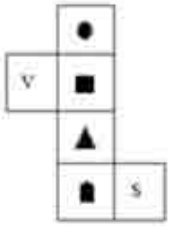

(A) ■

(B) ▲

(C) V

(D) ●

Answer: (B) ▲

101 कान्हा राष्ट्रीय उद्यान _____ या राज्यामध्ये आहे –

The Kanha National Park is in the state of –

کانہا نیشنل پارک صوبہ میں ہے :

A.उत्तर प्रदेश
A.Uttar Pradesh
A.اتر پردیش

B.छत्तीसगढ
B.Chhattisgarh
B.چھتیس گڑھ

C.आंध्र प्रदेश
C.Andhra Pradesh
C.آندھرا پردیش

D.मध्य प्रदेश
D.Madhya Pradesh
D.مدھیہ پردیش

Answer: D.मध्य प्रदेश
D.Madhya Pradesh
D.مدھیہ پردیش

102 कोणत्या स्थितीत दृश्यांची सहायता घेणे अधिक योग्य असल्याचे दिसून येत?

Under which condition the visual aid appears to be more suitable?

کس حالت میں بصری امداد زیادہ موزوں ہوتی ہے؟

A.जेव्हा एखादा विषय खूप दूरच्या ठिकाणी पडलेला असतो तेव्हा
A.When a subject is lying at a far too distant place
A.جب ایک موضوع بہت دور دراز جگہ پر ہے

B.जेव्हा विषयवस्तूला ऐतिहासिक महत्त्व असते तेव्हा
B.When the subject is having historical importance
B.جب موضوع تاریخی اہمیت رکھتا ہے

C.जेव्हा विषयवस्तू वर्गात दृश्यमान होण्यास फारच लहान असेल
C.When the subject is too small to visible the class
C.جب موضوع کلاس کے دیکھنے کے لئے بہت چھوٹا ہے

D.वरील सर्व
D.All of the above
D.مذکورہ تمام

Answer: D.वरील सर्व
D.All of the above
D.مذکورہ تمام

103 सूचना : खालील प्रत्येक प्रश्नात दोन विधाने I आणि II दिलेले आहेत. हे विधान एकतर स्वतंत्र कारण असू शकतात किंवा स्वतंत्र कारणांचे परिणाम असू शकतात. यांपैकी एक विधान इतर विधानाचा परिणाम असू शकतो. दोन्ही विधाने वाचा आणि खालीलपैकी कोणत्या उत्तराचा पर्याय या दोन्ही विधानांमधील संबंधांचे वर्णन करतो ते ठरवा.

विधान :
I. ग्रामीण भागात दारू पिण्याचे प्रमाण वाढत आहे.
II. शहरी भागात दारू पिण्याचे प्रमाण वाढत आहे.

DIRECTIONS: Below in each question are given two statements I and II. These statements may be either independent causes or may be effects of independent causes. One of these statements may be the effect of the other statement. Read both the statements and decide which of the following answer choice correctly depicts the relationship between these two statements.

Statements:
I. Rural drunkenness is increasing.
II. Urban drunkenness is increasing.

ہدایات: نیچے ہر سوال میں دو بیانات I اور II آزاد وجوہات یا پھر آزاد وجوہات کے اثرات ہو سکتے ہیں۔ ان دیے گئے ہیں۔ یہ بیانات یا تو بیانات میں سے ایک بیان دوسرے کا اثر ہو سکتا ہے۔دونوں بیانات پڑھیں اور فیصلہ کریں کہ نیچے دیے گئے کس جواب کا انتخاب ان دونوں بیانات کے در میان تعلق کو ٹھیک سے ظاہر کرتا ہے۔

بیانات:
I – دیہاتوں میں شراب کے نشے میں اضافہ ہو رہا ہے۔
II - شہروں میں شراب کے نشے میں اضافہ ہو رہا ہے۔

A.विधान I कारण आहे आणि विधान II त्याचा परिणाम आहे;
A.Statement I is the cause and statement II is its effect;
A. بیان نمبر I وجہ ہے اور بیان نمبر II اس کا اثر ہے۔

B.विधान II कारण आहे आणि विधान I त्याचा परिणाम आहे;
B.Statement II is the cause and statement I is its effect;
B. بیان نمبر II وجہ ہے اور بیان نمبر I اس کا اثر ہے۔

C.विधान I आणि II दोन्ही स्वतंत्र कारणे आहेत;
C.Both the statements I and II are independent causes;
C. دونوں بیانات نمبر I اور نمبر II آزاد وجوہات ہیں۔

D.विधान I आणि II दोन्ही काही सामान्य कारणांचे परिणाम आहेत
D.Both the statements I and II are effects of some common cause.
D. دونوں بیانات نمبر I اور نمبر II کسی ایک وجہ کے اثرات ہیں۔

Answer: D.विधान I आणि II दोन्ही काही सामान्य कारणांचे परिणाम आहेत
D.Both the statements I and II are effects of some common cause.
D. دونوں بیانات نمبر I اور نمبر II کسی ایک وجہ کے اثرات ہیں۔

For More Info And Videos About TAIT-Exam Syllabus And Other Exam Visit My Channel
TAIT च्या 30 प्रश्नपत्रिका PDF
BADSHAHimp Available Request 9765226781
WWW.YouTube.com/BADSHAHimp
Subscribe My Channel

104 कोणता घटक मानवी शरीरात आढळत नाही?

Which of the element is not found in human body?

ان میں سے کونساعنصر انسانی جسم میں نہیں پایا جاتا ہے؟

A.मॅग्नेशियम
A.Magnesium
A.میگنیشیم

B.क्रोमियम
B.Chromium
B.کرومیم

C.एल्युमिनियम
C.Aluminum
C.الومینیم

D.तांबे
D.Copper
D.تانبا

Answer: C.एल्युमिनियम
C.Aluminum
C.الومینیم

105 कोणते भारतीय राज्य पाकिस्तानच्या सीमेलगत आहे?

Which India state borders Pakistan?

پاکستان کی سرحد پر کون سا بھارتیہ صوبہ ہے :

A.राजस्थान
A.Rajasthan
A.راجستھان

B.हरियाणा
B.Haryana
B.ہریانہ

C.उत्तराखंड
C.Uttarakhand
C.اتراکھنڈ

D.यांपैकी कोणतेही नाही
D.None of these
D.انمیں سے کوئی نہیں

Answer: A.राजस्थान
A.Rajasthan
A.راجستھان

106 सूचना: खालील प्रश्नांमध्ये दिलेल्या पर्यायांमधून संबंधित अक्षर/शब्द/संख्या निवडा.

APPLE : 50 : : ORANGE : ?

DIRECTIONS: In the following question, select the related letter/word/number from the given alternatives.

APPLE : 50 : : ORANGE : ?

سمت: مندرجہ ذیل سوال میں، دیے گئے متبادل سے متعلقہ حرف/لفظ/نمبر منتخب کریں۔

APPLE : 50 : : ORANGE : ?

A.54
A.54
A.54

B.60
B.60
B.60

C.66
C.66
C.66

D.56
D.56
D.56

Answer: B.60
B.60
B.60

For More Info And Videos About TAIT-Exam Syllabus And Other Exam Visit My Channel
TAIT च्या 30 प्रश्नपत्रिका PDF
BADSHAHimp Available Request 9765226781
YouTube WWW.YouTube.com/BADSHAHimp
Subscribe My Channel

107 निर्देश: खालील प्रश्नांमध्ये प्रश्न चिन्हाच्या जागी (?) काय येईल?
0.07 × 1250 + 0.02 × 650 = ?

DIRECTIONS: What will come in place of the question mark (?) in the following questions?
0.07 × 1250 + 0.02 × 650 = ?

ہدایت: نیچے دئے ہوئے سوالات میں سوالیہ نشان (؟) کی جگہ کیا آئیگا:
0.07 × 1250 + 0.02 × 650 = ?

A.625
A.625
A.625

B.545
B.545
B.545

C.61.5
C.61.5
C.61.5

D.100.5
D.100.5
D.100.5

Answer: D.100.5
D.100.5
D.100.5

108 सूचना: खालील प्रश्नात, दिलेल्या पर्यायांमधून नातेसंबंध सांगणारी आकृती निवडा.

DIRECTIONS: In the question below, select the related figure from the given alternatives.

ہدایات: نیچے دیئے گئے سوال میں، دیئے گئے متبادلات میں سے متعلق متبادل چنئے۔

Problem Figures:

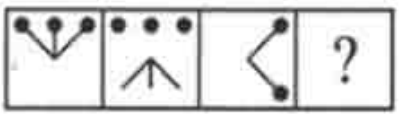

Answer Figures:

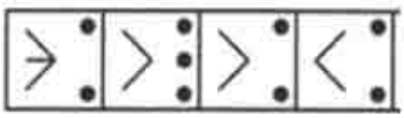

A. 1

B. 2

C. 3

D. 4

Answer: B. 2

109 खालीलपैकी शुद्ध वाक्य कोणते ?

A.गाव धरणाखाली जाणार ही बातमी गावाला वाऱ्यासारखी पसरली.

B.गाव धरणावर जाणार ही बातमी गावात वाऱ्यासारखी पसरली.

C.गाव धरणाखाली जाणार ही बातमी गावात वाऱ्यासारखी पसरली.

D.गाव धरणावर जाणार ही बातमी गावाला वाऱ्यासारखी पसरली.

Answer: C.गाव धरणाखाली जाणार ही बातमी गावात वाऱ्यासारखी पसरली.

110 पाण्यातील वजनदार धातूचे प्रदूषण होण्याचे कारण -

Heavy metal pollution of water is caused by—

بھاری دھات کی پانی کی آلودگی کس کی وجہ سے ہوتا ہے۔

A.रंगविणे
A.Paints
A. پینٹس

B.लाकूडजाळने
B.Wood burning
B. لکڑی کے جلنے سے

C.आम्ल वनस्पती
C.Acid Plants
C. ایسڈ پودوے

D.यापैकी एकही नाही
D.None of these
D. ان میں سے کوئی بھی نہیں

Answer: A.रंगविणे
A.Paints
A. پینٹس

For More Info And Videos About TAIT-Exam Syllabus And Other Exam Visit My Channel
TAIT च्या 30 प्रश्नपत्रिका PDF
BADSHAHimp Available Request 9765226781
WWW.YouTube.com/BADSHAHimp
Subscribe My Channel

111 अन्नसाखळीत, वनस्पतींनी वापरलेली सौर ऊर्जा केवळ-.....प्रतिशत असते

In a food chain, the solar energy utilized by plants is only—

ایک کھانے کی سیریز میں، پودوں کی طرف سے استعمال شمسی توانائی استعمال ہوتی ہے

A.10 प्रतिशत
A.10 percent
A.10 فیصد

B.0.01 प्रतिशत
B.0.01 percent
B.0.01 فیصد

C.0.1 प्रतिशत
C.0.1 percent
C.0.1 فیصد

D.1 प्रतिशत
D.1 percent
D.1 فیصد

Answer: A.10 प्रतिशत
A.10 percent
A.10 فیصد

112 **सूचना:** दिलेल्या चारांपैकी वेगळी (असंबद्ध) असणारी आकृती शोधून काढा.

DIRECTIONS: Find the odd figures from the given four figures.

ہدایات: دیئے گئے چار شکلوں میں سے طاق شکل کونسی ہے؟

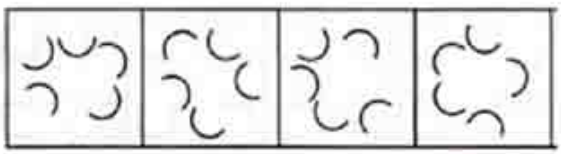

A. (A)

B. (B)

C. (C)

D. (D)

Answer: D. (D)

For More Info And Videos About TAIT-Exam Syllabus And Other Exam Visit My Channel
TAIT च्या 30 प्रश्नपत्रिका PDF Available Request 9765226781
BADSHAHimp
WWW.YouTube.com/BADSHAHimp
Subscribe My Channel

113 39 मुलांच्या वर्गात, रोहित हा सोनिकच्या 7 क्रमांकाने पुढे आहे. जर सोनिकचे स्थान शेवटून 17 वे आहे, तर सुरुवातीपासून रोहितचे स्थान कितवे ?

Rohit is 7 ranks ahead of Sonik in a class of 39 students. If Sonik's rank is seventeenth from the last, what is Rohit's rank from the start?

39 بچھوں کی کلاس میں روہت سونک سے 7 درجہ آگے ہے. اگر سونک کہ درکہ آخر سے سترہ ہے، روہت کہ شرو سے کیا درجہ کیا ہے؟

A.(1) 14 वे
A.14th
A.14th

B.(2) 15 वे
B.15th
B.15th

C.(3) 16 वे
C.16th
C.16th

D.(4) 17 वे
D.17th
D.17th

Answer: C.(3) 16 वे
C.16th
C.16th

114 दोन संख्यांचा मसावी 11 आहे आणि त्यांचा लसावी 693 आहे. जर एक संख्या 77 असेल, तर दुसरी संख्या काढा?

The H.C.F. of two numbers is 11 and their L.C.M. is 693. If one of the numbers is 77, find the other number?

ایچ سی.ایف دو نمبروں کا 11 اور ان کے ایل سی ایم 693 ہے۔ اگر ایک نمبر 77 ہے تو، دوسرا نمبر تلاش کریں؟

A.99
A.99
A.99

B.119
B.119
B.119

C.154
C.154
C.154

D.231
D.231
D.231

Answer: A.99
A.99
A.99

115 $1^2 + 2^2 + ... 9^2$ च्या एकक स्थानचा अंक

Unit digit of $1^2 + 2^2 + ... 9^2$ is

12 + 22 + ... 9^2 کایونٹ ہندسہ ہے

A.1
A.1
A.1

B.2
B.2
B.2

C.3
C.3
C.3

D.7
D.7
D.7

Answer: D.7
D.7
D.7

116 रमाला खूप मित्र आहेत. तिला इतरांच्या भावना समजून घेण्याचे वरदान लाभले आहे. तिच्याकडे हे आहे

Rama has many friends. She is blessed with the ability to understand others feelings she is known to have

رما کے بہت سے دوست ہیں۔ وہ دوسرے کے احساس و جذبات کو سمجھنے کی قابلیت سے سرفراز ہے اس کے پاس کیا ہے

A.आंतर वैयक्तिक
A.Interpersonal
A.انٹرپرسنل

B.आंतर वैयक्तिक
B.intra personal
B. انٹرا پرسنل

C.अवकाशासंबंधी
C.spatial
C.مکانی قابلیت

D.वरीलपैकी कोणतेही नाही
D.none of the above
D. درج بالا میں سے کوئی نہیں

Answer: A.आंतर वैयक्तिक
A.Interpersonal
A.انٹرپرسنل

117 सूचना: दोन विधाने आणि त्यानंतर दोन निष्कर्ष, I आणि II दिले आहेत. ही विधाने सामान्यतः ज्ञात वस्तुस्थितीपेक्षा भिन्न असली तरी सत्य आहेत असे समजा. दिलेल्यापैकी कोणता निष्कर्ष दिलेल्या विधानांवरुन नक्की काढता येऊ शकतो हे तुम्ही ठरवायचे आहे.तुमचे उत्तर सूचित करा.

विधाने:
सर्व कोंबड्या कोंबडे आहेत.
एकही कोंबडी काळी नाही.
निष्कर्ष:
I. सर्व कोंबडे कोंबड्या आहेत.
II. एकही कोंबडी काळी नाही.

DIRECTION: Two statements are given following by two conclusions, I, and II. You have to consider that statements to be true, even if they seem to be at variance from commonly known facts. You are to decide which of the given conclusions can definitely be drawn from the given statements. Indicate your answer.

Statements:
All hens are cocks.
No hen is black.

Conclusion:
I. All cocks are hens.
II. No hen is black.

ہدایات: دو سٹیٹمنٹ جوکہ دو خلاصوں پر مشتمل ہیں .I، اور II .اپ کو وہ سٹیٹمنٹ درست ماننا ہے، اگرچہ دکہنے میں وہ بہت سارے حقاٰئق ست مطبقت رکہتی ہو۔ اپ کو دیے گے خلاصوں میں سے یقینی طور پر اسے اختیار کرنا ہے جو سٹیٹمنٹ سے نکلا ہو. اپنا جواب تلاش کرے.

اظہار بیان:
تمام مرغیاں مرغ ہیں
کوی مرغی کالی نہیں ہے

نتائج:
I.تمام مرغ مرغیاں ہیں
II.کوی مرغی کالی نہیں ہے

A.केवळ निष्कर्ष I वैध आहे
A.Only conclusion I is valid
A.صرف I خلاصہ قبل اعتماد ہے

B.केवळ निष्कर्ष II वैध आहे
B.Only conclusion II is valid
B. صرف II درست ہے

C.दोन्ही निष्कर्ष वैध आहेत
C.Both the conclusion are valid
C.دونو خلاصے قابل اعتماد ہیں

D.दोन्ही निष्कर्ष अवैध आहेत
D.Both the conclusion are invalid
D.دونو خلاصے ناقابل اعتماد ہیں

Answer: B.केवळ निष्कर्ष II वैध आहे
B.Only conclusion II is valid
B. صرف II درست ہے

118 दुकानदाराने 40 किग्रॅ रिफाईंड तेलासोबत ₹60 प्रति किलो असलेले वनस्पती तेल मिसळले. त्याला दोन तेलांच्या मिश्रणाची विक्री केल्यानंतर ₹10 नफा झाला. पहिल्या तेलाची किंमत काय असेल

The shopkeeper mixed 40 kg refined oil with vegetable oil worth ₹60 per kg. Thus he gain ₹10 after selling the mixture of the two oils. The price of the first oil is

دکاندار نے 40 کلو گرام صاف تیل کو ₹60 فی کلو والےسبزیوں کے تیل کے ساتھ ملایا۔ اس طرح وہ دو تیل کے مرکب کی فروخت کے بعد ₹10حاصل کرتا ہے۔ پہلے تیل کی قیمت کیا ہے

A.20
A.20
A.20

B.25
B.25
B.25

C.45
C.45
C.45

D.निश्चित करता येत नाही
D.Can’t be determined
D.معلوم نہیں ہو سکتا

Answer: D.निश्चित करता येत नाही
D.Can’t be determined
D.معلوم نہیں ہو سکتا

119 सूचना : खालील प्रत्येक प्रश्नात दोन विधाने I आणि II दिलेले आहेत. हे विधान एकतर स्वतंत्र कारण असू शकतात किंवा स्वतंत्र कारणांचे परिणाम असू शकतात. यांपैकी एक विधान इतर विधानाचा परिणाम असू शकतो. दोन्ही विधाने वाचा आणि खालीलपैकी कोणत्या उत्तराचा पर्याय या दोन्ही विधानांमधील संबंधांचे वर्णन करतो ते ठरवा.

विधान :
I. खाजगी वैद्यकीय महाविद्यालयांनी खर्चाची पूर्तता करण्यासाठी गेल्या वर्षाच्या शुल्कापेक्षा चालू वर्षातील शिक्षण शुल्क २०० टक्क्यांनी वाढवले आहे.
II. शासकीय वैद्यकीय महाविद्यालयांनी किंमतीत वाढ असूनही त्यांच्या शुल्कात वाढ केली नाही.

DIRECTIONS: Below in each question are given two statements I and II. These statements may be either independent causes or may be effects of independent causes. One of these statements may be the effect of the other statement. Read both the statements and decide which of the following answer choice correctly depicts the relationship between these two statements.

Statements:
I. The Private medical colleges have increased the tuition fees in the current year by 200 percent over the last year's fees to meet the expenses.
II. The govt. medical colleges have not increased their fees inspite of price escalation.

ہدایات: نیچے ہر سوال میں دو بیانات I اور II آ تو یہ بیانات یا پھر آزاد وجوہات کے اثرات ہو سکتے ہیں۔ انہیں گئے ہیں۔ بیانات میں سے ایک بیان دوسرے کا اثر ہو سکتا ہے۔دونوں بیانات پڑھیں اور فیصلہ کریں کہ نیچے دیے گئے کس جواب کا انتخاب ان دونوں بیانات کے در میان تعلق کو ٹھیک سے ظاہر کرتا ہے۔

بیانات:
I – پرائیویٹ میڈیکل کالجوں نے اخراجات پورے کرنے کے لیے روا ں سال میں پچھلے سال کی فیس کے مقابلے میں 200 فیصد اضافہ کیا ہے۔
II ۔ قیمتوں میں اضافے کے باوجود سرکاری میڈیکل کالجوں نے اپنی فیس میں اضافہ نہیں کیا۔

A.विधान I कारण आहे आणि विधान II त्याचा परिणाम आहे;
A.Statement I is the cause and statement II is its effect;
A. بیان نمبر I وجہ ہے اور بیان نمبر II اس کا اثر ہے۔

B.विधान II कारण आहे आणि विधान I त्याचा परिणाम आहे;
B.Statement II is the cause and statement I is its effect;
B. بیان نمبر II وجہ ہے اور بیان نمبر I اس کا اثر ہے۔

C.विधान I आणि II दोन्ही स्वतंत्र कारणे आहेत;
C.Both the statements I and II are independent causes;
C. دونوں بیانات نمبر I اور نمبر II آزاد وجوہات ہیں۔

D.विधान I आणि II दोन्ही काही सामान्य कारणांचे परिणाम आहेत.
D.Both the statements I and II are effects of somecommon cause.
D. دونوں بیانات نمبر I اور نمبر II کسی ایک وجہ کے اثرات ہیں۔

Answer: D.विधान I आणि II दोन्ही काही सामान्य कारणांचे परिणाम आहेत.
D.Both the statements I and II are effects of somecommon cause.
D. دونوں بیانات نمبر I اور نمبر II کسی ایک وجہ کے اثرات ہیں۔

120 “लास्ट मॅन इन टॉवर” याचे लेखक कोण आहेत

“Last Man In Tower” is authored by –

لاسٹ مین ان ٹاور لکھی ہے :

A.चेतन भगत
A.Chetan Bhagat
A.چیتن بھگت

B.अरविंद अडीगा
B.Arvind Adiga
B.اروند اڈیگا

C.अमिश त्रिपाठी
C.Amish Tripathy
C.امیش ترپاٹھی

D.यांपैकी कोणतेही नाही
D.None of these
D.انمیں سے کوئی نہیں

Answer:

B.अरविंद अडीगा
B.Arvind Adiga
B.اروند اڈیگا

121 3 x A चे कमीत कमी मूल्य किती असावे म्हणजे तो पूर्ण घन बनेल?

What is the least value of A for which 3 x A is a perfect cube?

A 3 کےلیے xAکی سب سے کم قدر کون سی ہے جس ایک کامل مربع ہے؟

A.2
A.2
A.2

B.9
B.9
B.9

C.20
C.20
C.20

D.50
D.50
D.50

Answer: B.9
B.9
B.9

122 बीजगणित शिकणे आवडत नाही कारण शिक्षक कठोर आहे आणि समजण्या साठी खूप नीरस अभ्यास आवश्यक असतो हे ह्याचे उदाहरण आहे

Learning to dislike algebra because the teacher is rigid and requires much monotonous drill illustrates the principle of—

الجبرا کو ناپسند کرنا سیکھنے کی وجہ سے استاد سخت ہے اور زیادہ ناراض ڈرل کی ضرورت ہوتی ہے.

A.अट
A.Conditioning
A.کنڈیشنگ

B.औपचारिक शिस्त
B.Formal discipline
B.رسمی نظم و ضبط

C.प्रेरक तीव्रता
C.Motivational intensity
C.ترغیبی شدت

D.बोधात्मक कठोरपणा
D.Perceptual rigidity
D.تصوراتی شدت

Answer: A.अट
A.Conditioning
A.کنڈیشنگ

123 यापैकी कोणते बौद्धिक अकार्यक्षमतेचे उदाहरण आहे

Which among these is an example of intellectual disability

ان میں سے کون ذہنی علامت کی معذوری کی ایک مثال ہے

A.डिस्लेक्सिया (वाचन अक्षमता)
A.Dyslexia
A.پڑھنے کی اہلیت میں کمی

B.एडीएचडी
B.ADHD
B.اے ڈی ایچ ڈی

C.मतिमंदत्व
C.Mental retardation
C.دماغی خرابی

D.ऑटिझम (स्वमग्नता)
D.Autism
D.خوش خیالی

Answer: C.मतिमंदत्व
C.Mental retardation
C.دماغی خرابی

124 DIRECTIONS: A sentence with an underlined word is given below. Find the Word which is most similar in meaning to the underlined word.
The fans waited for hours to catch a glimpse of the celebrated actress.

A.Glance

B.Accessory

C.Vehicle

D.Movie

Answer: A.Glance

125 सूचना: अर्थपूर्ण परिच्छेद निर्माण करण्यासाठी, खाली दिलेली (P), (Q) (R), (S) आणि (T) ही पाच वाक्ये योग्य अनुक्रमाने पुनर्रचना करा; त्यांनतर खालील प्रश्नांची उत्तर द्या.

P. कुरुप बदकाकडे पाहून, अन्य सर्व बदक त्याची मजा घेत होते. त्यामुळे नाराज होऊन, बिचारा बदक शेतातून जवळच्या नदीकडे पळाला.
Q. तो नदीत बुडून मरायचा विचार करतो, पण नदीत, कुरूप नव्हे तर एका सुंदर हंसाचे आपले प्रतिबिंब पाहून तो विचार सोडून देतो.
R. दहांपैकी ९ बदके आपल्या आईसारखी दिसत होती. पण दहावे बदक मोठा, राखाडी आणि कुरूप दिसत होता.
S. एका शेतकऱ्याकडे एक बदक होता, त्याने १० अंडी घातली. लवकरच ती सर्व अंडी उबवली.
T. नदीमध्ये जेथे त्याला बुडायची इच्छा होती तिथे त्याला सुंदर, सफेद हंस दिसतात.

पुनर्रचना केल्यानंतर खालीलपैकी कोणते वाक्य तिसरे असेल?

DIRECTION: Rearrange the following five sentences (P), (Q), (R), (S) and (T) in the proper sequence to form a meaningful paragraph; then answer the questions given below them.
P. All the other ducklings made fun of the ugly one. Unhappy in the farm, the poor duckling ran away to a river nearby.
Q. It bends to drown but abandons the idea when sees its reflection in the river, which was not an ugly duckling, but a beautiful swan!
R. Of the ten, nine ducklings looked like the mom. The tenth one was big, grey and ugly.
S. A farmer had a duck, which laid ten eggs. Soon, they all hatched.
T. At the river, where it wanted to get drowned, it sees white, beautiful swans.

Which of the following should be the THIRD sentence after rearrangement?

ہدایات: ان پانچ جملوں (P)، (Q)، (R)، (S) اور (T) کو با معنی پیرا بنانے کے لئے دوبارہ ترتیب دیجئے، پھر نیچے دے گئے سوالوں کے جواب دیجئے

P. سارے بطخ کے چوزے بدصورت والے کہ مذاک اڈا رہے تھے. کھیت میں ناراض، بیچارہ چوزہ نزدیک کے دریا پی گیا.
Q. یہ ڈھوبنے کے لئے نیچے جکا اور ارادہ مستراق کر دیا جب اسنے دریا میں پرچھائ دیکھی، جو بدصورت چوزہ نہیں تھا، بلکہ ایک خوبصورت ہنس تھا!
R. دس میں سے، نو چوزے اپنی ماں کی طرح تھے. دسوا والا بڈا ، کالا اور بدصورت تھا.
S. زمیندار کے پاس ایک بطخ تھی، جسنے دس انڈے دیے. جلدی ، انسے چوزے نکلے.
T. دریا پی، جہاں یہ ڈھوبنا چاہتا تھا، اسنے سفید، خوبصورت ہنس دیکھا.

دوبارہ ترییب دینے کے بعد کون سا جملہ تیسرا ہونا چاہیے؟

A.P
A.P
A.P

B.Q
B.Q
B.Q

C.R
C.R
C.R

D.S
D.S
D.S

Answer: A.P
A.P
A.P

126 निर्देश: खालील प्रश्नामध्ये, दिलेल्या प्रतिसादांपैकी खालील शब्दांचा अर्थपूर्ण क्रम कोणता असेल?

1. महासागर
2. ओढा
3. समुद्र
4. हिमनदी
5. नदी

DIRECTIONS: In the following question, which one of the given responses would be a meaningful order of the following?

1. Ocean
2. Rivulet
3. Sea
4. Glacier
5. River

ہدایات: مندرجہ ذیل سوال میں، دیےگیے جوابات میں سے کونسا ایک مندرجہ ذیل کی معنی خیز ترتیب ہوگی؟
1. سحر
2. ریویلیٹ
3. سمندر
4. گلیشیئر
5. دریا

A.5, 2, 3, 1, 4
A.5, 2, 3, 1, 4
A.5, 2, 3, 1, 4

B.4, 2, 5, 3, 1
B.4, 2, 5, 3, 1
B.4, 2, 5, 3, 1

C.5, 2, 3, 4, 1
C.5, 2, 3, 4, 1
C.5, 2, 3, 4, 1

D.4, 2, 1, 3, 5
D.4, 2, 1, 3, 5
D.4, 2, 1, 3, 5

Answer: B.4, 2, 5, 3, 1
B.4, 2, 5, 3, 1
B.4, 2, 5, 3, 1

127 सूचना: दिलेल्या पर्यायांमधून वेगळे ते बाहेर काढा.

DIRECTIONS: Find the odd one out from the given alternatives.

سمت: دیے گئے متبادل میں سے بے جوڑ کو تلاش کرو۔

A.वॉक
A.Walk
A.چہل قدمی

B.धावणे
B.Run
B.دوڑنا

C.हलणे
C.Move
C.حرکت کرنا

D.वाचा
D.Read
D.پڑھنا

Answer: D.वाचा
D.Read
D.پڑھنا

128 प्रश्नासाठी सूचना: खालील मालिका पूर्ण करा.

JTU, _____ UCF, BFM, JHU

DIRECTION: Complete the following series.

JTU, _____ UCF, BFM, JHU

سوال کے لیے ہدایت:مندرجہ ذیل سیریز کو مکمل کریں۔

JTU, _____ UCF, BFM, JHU

A.OYZ
A.OYZ
A.OYZ

B.JCZ
B.JCZ
B.JCZ

C.OCF
C.OCF
C.OCF

D.JCZ
D.JCZ
D.JCZ

Answer: A.OYZ
A.OYZ
A.OYZ

129 कर्करोगाच्या उपचारासाठी वापरले जाणारे उत्कृष्ट वायू म्हणजे

The noble gas used for the treatment of cancer is

کینسر کے علاج میں استعمال ہونے والی گیس ہے

A.क्रीप्टन
A.Krypton
A.کرپٹن

B.हीलियम
B.Helium
B.ہیلیم

C.रेडॉन
C.Radon
C.ریڈن

D.अरगॉन
D.Argon
D.آرگن

Answer: C.रेडॉन
C.Radon
C.ریڈن

130 सूचना: दिलेल्या पर्यायांमधून वेगळे ते बाहेर काढा.

DIRECTIONS: Find the odd one out from the given alternatives.

سمت: دیے گئے متبادل میں سے بے جوڑ کو تلاش کرو۔

A.DEGJ
A.DEGJ
A.DEGJ

B.QRTW
B.QRTW
B.QRTW

C.JKNQ
C.JKNQ
C.JKNQ

D.YZBE
D.YZBE
D.YZBE

Answer: C.JKNQ
C.JKNQ
C.JKNQ

131 मतदारांचा अर्थ

Electorate means

ووٹر کا مطلب ہے

A.असे सर्व नागरीक ज्यांना मतदान करण्याचा आणि निवडणूकीमध्ये आपले प्रतिनिधी निवडण्याचा अधिकार आहे
A.All the citizens who possess right to Vote and elect their representatives in an election.
A. تمام شہری ووٹ اور انتخابات میں خود کے نمائندے منتخب کرنے کا حق رکھتے ہیں

B.ज्या लोकांना देशात राहण्याचा अधिकार आहे
B.Those people who have right to live in a country
B. وہ لوگ جو ایک ملک میں رہنے کا حق رکھتے ہیں۔

C.ज्या लोकांना त्यांच्या प्रतिनिधींना निवडण्याचा अधिकार नाही
C.Those people who do not have right to elect their representatives
C. وہ لوگ جو خود کے نمائندے منتخب کرنے کا حق نہیں رکھتے

D.ज्यांना निवडून देण्याचा अधिकार आहे
D.Those who have right to be elected
D. وہ لوگ جو منتخب ہونے کا حق رکھتے ہیں

Answer: A.असे सर्व नागरीक ज्यांना मतदान करण्याचा आणि निवडणूकीमध्ये आपले प्रतिनिधी निवडण्याचा अधिकार आहे
A.All the citizens who possess right to Vote and elect their representatives in an election.
A. تمام شہری ووٹ اور انتخابات میں خود کے نمائندے منتخب کرنے کا حق رکھتے ہیں

132 13 फेब्रुवारी 2010 ते 30 मार्च 2010 मधील एकूण दिवसांची संख्या काय आहे?

Find the number of days from 13 Feb 2010 to 30 March 2010?

13؟ فروری 2010 سے 30 مارچ 2010 تک دنوں کی تعداد معلوم کریں

A.45 दिवस
A.45 Days
A.45دن

B.46 दिवस
B.46 Days
B.46دن

C.50 दिवस
C.50 Days
C.50دن

D.48 दिवस
D.48 Days
D.48دن

Answer: B.46 दिवस
B.46 Days
B.46دن

133 युनेस्कोच्या अनेक आशाजनक उपक्रमांपैकी एक खालील आहे

UNESCO has as one of its many promising activities, a campaign to provide—

یونیسکو اور اس کے بہت سے وعدہ کی سرگرمیوں میں سے ایک ہے، — فراہمی

A.सदस्य देशांतील सर्व प्रौढांसाठी शिक्षण
A.Education for all adults of the member nations
A.اراکین اقوام کے تمام بالغوں کے لئے تعلیم

B.सगळ्यांसाठी , मोफत, अनिवार्य प्राथमिक शिक्षण
B.Universal, free, compulsory primary education
B.آفاقی، مفت، لازمی ابتدائی تعلیم

C.ज्यांची इच्छा आहे त्यांना मोफत शिक्षण
C.Free education to those who desires it
C.ان لوگوں کے لئے مفت تعلیم جو اسے پسند کریں

D.साम्यवादाचे धोके समजावणे
D.Indoctrination against the dangers of communism
D.کمیونزم کے خطرات کے خلاف اشارہ

Answer: B.सगळ्यांसाठी , मोफत, अनिवार्य प्राथमिक शिक्षण
B.Universal, free, compulsory primary education
B.آفاقی، مفت، لازمی ابتدائی تعلیم

134 सध्या, माया आणि छायाच्या वयाचे गुणोत्तर 6:5 आहे. 15 वर्षांनंतर त्यांच्या वयाचे गुणोत्तर 9:8 असेल. मायाचे वर्तमान वय काय आहे?

At present, the ratio of the age of Maya and Chaya is 6 :5. After 15 years the ratio of their age will be 9 : 8. What is the present age of Maya?

مایا اور چھایا کی عمروں کا موجودہ تناسب 6:5 ہے۔15 سال بعد اُن کی عمروں کا تناسب 9:8 ہو گا۔مایا کی موجودہ عمر کیا ہے؟

A.21 वर्षे
A.21 years
A.21 سال

B.24 वर्षे
B.24 years
B.24 سال

C.30 वर्षे
C.30 years
C.30 سال

D.40 वर्षे
D.40 years
D.40 سال

Answer: C.30 वर्षे
C.30 years
C.30 سال

135 _____ ही एक अशी पद्धत होती जी पछाडलेल्या व्यक्तीपासून अमंगल आत्म्यांना किंवा आवेगांना दूर करण्यास वापरली जात असे.

_____ was the method used to drive away evil spirits or forces from a possessed person.

_____ وہ طریقہ ہے جس کا استعمال کسی متاثر شخص سے شیطانی روحوں یا قوتوں کو بھگانے کیلیے کیا جاتا ہے۔

A.वैद्यकिय सराव
A.Magical practice
A. جادوئی عمل

B.झाडफूक
B.Exorcism
B.جھاڑ پھونک

C.अमंगल सराव
C.Evil practice
C.شیطانی عمل

D.यापैकी सर्व
D.All of these
D.مذکورہ سبھی

Answer: B.झाडफूक
B.Exorcism
B.جھاڑ پھونک

136 सूचना: खालील दिलेल्या प्रश्नामध्ये काही विधाने आणि काही निष्कर्ष आहेत. सामन्यात: ज्ञात तथ्यांपेक्षा ते वेगळे असतील तर दिलेली विधाने तुम्हाला सत्य मानवी लागतील आणि त्यानंतर दिलेल्या विधानाचे अनुकरण दिलेल्यापैकी कोणता निष्कर्ष तार्किकदृष्ट्या करतो ते ठरवा.

विधाने :
M > A ≥ B = Q ≤ P < J ≤ Y
निष्कर्ष :
I. A = Q
II. A> Q

DIRECTIONS: In the question given below, there are few statements followed by few conclusions. You have to take the given statements to be true even if they seem to be at variance with commonly known facts and then decide which of the given conclusion logically follow(s) from the given statements.

Statements:
M > A ≥ B = Q ≤ P < J ≤ Y
Conclusions:
I. A = Q
II. A > Q

ہدایات: مندرجہ ذیل سوال میں، کچھ بیانات کے بعد کچھ نتائج موجود ہیں. اگر آپ کو عام طور پر جانے جاتے حقائق کے ساتھ بھی متغیر ہونے لگے تو بھی آپ دئے گئے بیانات دماغ میں رکھیں اور پھر اس بات کا فیصلہ کریں کہ ذیل میں دیا گیا کونسا نتیجہ منطقانہ طور پر دیے گئے بیانات کی پیروی کرتا ہے.

بیانات:
M > A ≥ B = Q ≤ P < J ≤ Y
نتائج:
A = Q .I
A> Q .II

A.तर फक्त I निष्कर्ष खरा आहे
A.If only conclusion I is true
A.اگر صرف I نتیجہ درست ہے

B.तर I व II हे दोन्हीही निष्कर्ष खरे नाहीत
B.If neither conclusion I nor II is true
B.اگر I اور II نتائج میں سے کوئی بھی درست نہیں

C.तर फक्त II निष्कर्ष खरा आहे
C.If only conclusion II is true
C.اگر صرف نتیجہ II درست ہے

D.तर I किंवा II यापैकी एक निष्कर्ष खरा आहे
D.If either conclusion I or II is true
D.اگر I اور II نتائج میں سے ایک درست ہے

Answer: D.तर I किंवा II यापैकी एक निष्कर्ष खरा आहे
D.If either conclusion I or II is true
D.اگر I اور IIنتائج میں سے ایک درست ہے

137 एका घनाला रंगवून किमान शक्य संख्येचे काप करून 72 लहान पण एकसारख्या तुकड्यांमध्ये कापले गेले आहे. तंतोतंतपणे रंगवलेले तीन चेहरे असलेले किती लहान तुकडे आहेत?

A cube is painted and cut into 72 smaller but identical pieces by making the minimum possible number of cuts.
How many smaller pieces have exactly three painted faces?

ایک کیوب کو ایک جیسے 72 ٹکڑوں میں کلر دے کر کاٹا گیا ہے۔ کم سے کم ممکن کٹ لگاتے ہوئے، تو کتنے حتمی چھوٹے ٹکڑے ہوں گے جن کے 3 منہ رنگین ہوں گے؟

A.12
A.12
A.12

B.8
B.8
B.8

C.36
C.36
C.36

D.24
D.24
D.24

Answer: B.8
B.8
B.8

138 ‘हलगर्जीपणा‘ या शब्दाचा समानार्थी शब्द कोणता ?

A.आस्था

B.हयगय

C.कळकळ

D.परवा

Answer: B.हयगय

139 'SOMNAMBULISM' पासून खालील शब्दांपैकी कोणते शब्द तयार केले जाऊ शकतात?

Which of the following words can be formed from 'SOMNAMBULISM'?

مندرجہ ذیل الفاظ میں سے کونسا 'SOMNAMBULISM' سے بنایا جاسکتا ہے

A.BIOME
A.BIOME
A.BIOME

B.BASAL
B.BASAL
B.BASAL

C.SOUL
C.SOUL
C.SOUL

D.NAMES
D.NAMES
D.NAMES

Answer: C.SOUL
C.SOUL
C.SOUL

140 पर्यावरणाचे शिक्षक भोपाळ गॅस दुर्घटना आणि त्याच्या वाईट प्रभावांविषयी माहिती पसरवू इच्छित आहे. ह्या साठी त्यांनी कश्या चा उपयोग करावा ?

An EVS teacher wants to disperse the knowledge about Bhopal gas tragedy and its ill effects. What teaching aid should be used here?

ایک ای وی ایس کا استاد بھوپال گیس کے حادثہ اور اس کے خراب اثرات کے بارے میں علم کو پھیلانا چاہتا ہے. یہاں تدریس کی کیا مدد استعمال کرنا چاہئے؟

A.पोस्टर
A.Posters
A.پوسٹر

B.पत्रके
B.Leaflets
B.لیفلیٹس

C.बॅनर
C.Banners
C.بینر

D.ऑडिओ व्हिज्युअल क्लिपिंग
D.Audio visual clipping
D.آڈیو بصری کلپنگ

Answer: D.ऑडिओ व्हिज्युअल क्लिपिंग
D.Audio visual clipping
D.آڈیو بصری کلپنگ

141 **सूचना:** खालील प्रश्नात उत्तरातील पर्यायांपैकी कोणत्या पर्यायी आकृतीत प्रश्नातील आकृती अंतर्भूत आहे?

DIRECTIONS: In the given question find the answer figure in which question figure is embedded.

ہدایات: دیئے گئے سوال میں، جواب کی شکل کو دریافت کیجیئے جو سوال میں سرایت کر گئی ہے۔

Question Figure:



(A) 

(B) 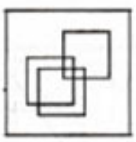

(C) 

(D) 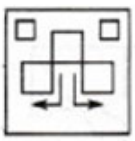

Answer: (C) 

142 खालील प्रश्नात, दिलेल्या अंकांमधून गहाळ संख्या निवडा.
In the following question, select the missing number from the given responses.
نیچے کے سوال میں ، گمنام نمبر کھوجیے جو شرطیں پورا کرتا ہو

4	5	10
36	49	?
2	2	2

A. 144

B. 55

C. 100

D. 64

Answer: A. 144

143 मूल्यांकन अशे व्यक्त केले जाऊ शकते-

Evaluation can be expressed as—

تشخیص کا اظہار ایسے کیا جا سکتا ہے-

A.व्यक्ती आणि समाज यांच्या दृष्टिकोनातून काय चांगले आणि अभिष्ट आहे
A.What is good and desirable from the point of view of individual and a society
A.انفرادی اور معاشرے کے نقطہ نظر سے کیا خوبی اور مطلوب ہے

B.मूल्यनिर्धारण एक गोष्ट किंवा प्रक्रिया चे मूल्य निर्धारित करते
B.Evaluation determines the value of a thing or procedure
B.تشخیص کسی چیز یا طریقہ کار کی قدر کا تعین کرتا ہے

C.शैक्षणिक उद्दिष्टे कित पर्यंत गाठल्या गेल्या आहेत - ह्याचे निर्णय म्हणजे मूल्यांकन
C.To what extent the Educational objectives have been attained—the judgment is called evaluation
C.تعلیمی اہداف کس حد تک حاصل کی گئی ہے -اس فیصلہ کو تشخیص کہا جاتا ہے

D.वरील सर्व
D.All the above
D.مذکورہ تمام

Answer: D.वरील सर्व
D.All the above
D.مذکورہ تمام

144 समजा आपण सकाळी आपल्या शाळेला घाईघाईने धाव घेत आहात. दरम्यान आपले डोळे रस्त्यावर जातात जेथे आपल्या विद्यार्थ्यांचे अपघात झाले आहे आणि विद्यार्थी गंभीर स्थितीत आहे तर तुम्ही काय निर्णय घ्याल

Suppose you are hurriedly rushing to your school in the morning. Meanwhile your eyes go across the road, where your student has met with an accident. What decision will you take under this critical condition of the student?

فرض کریں آپ جلدی جلدی اپنے اسکول کے لئے صبح صبح جلدی کر رہے ہیں. اس وقت تمہاری نظریں سڑک پر پڑتی ہیں، جہاں آپ کا طالب علم حادثے سے دوچار ہے. طالب علم کی اس نازک حالت کے تحت آپ کا کیا فیصلہ ہوگا؟

A.आपण आपली ओळख न दाखवता अपघाताच्या ठिकाणाहून दूर जाणार
A.You will go away from the accident's site in anonymity
A.آپ کو خاموشی سے حادثہ کی جگہ سے باہر جائیں گے

B.आपण अपघाताच्या ठिकाणी जाऊन विद्यार्थ्यां ला प्रथमोपचार द्याल
B.You reach the site, look after the student and give him first-aid
B.آپ سائٹ پر پہنچتے ہیں، طالب علم کی دیکھ بھال کرتے ہیں اور اسے ابتدائی طبی مدد دیتے ہیں

C.आपण तिथून निघून जाणार कारण आपण अनावश्यकपणे जोखीम घेऊ इच्छित नाही
C.You are escaping because you do not want to take risk unnecessarily
C.آپ فرار ہو گئے ہیں کیونکہ آپ غیر ضروری طور پر خطرہ نہیں لینا چاہتے ہیں

D.अपघात होणे हे एक साहसिक खेळ आहे आपण असे व्यक्त कराल
D.You are expressing the accident as an adventurous game.
D.آپ حادثے کا اظہار ایک مہم جوئی جیسے کھیل کے طور پر کرتے ہیں.

Answer: B.आपण अपघाताच्या ठिकाणी जाऊन विद्यार्थ्यां ला प्रथमोपचार द्याल
B.You reach the site, look after the student and give him first-aid
B.آپ سائٹ پر پہنچتے ہیں، طالب علم کی دیکھ بھال کرتے ہیں اور اسے ابتدائی طبی مدد دیتے ہیں

145 मस्कॅट ही _____ ची राजधानी आहे

Muscat is the capital of-

مسقط راجدھانی ہے :

A.ओमन
A.Oman
A.اومان کی

B.कुवेत
B.Kuwait
B.کویت کی

C.युएई
C.UAE
C.متحدہ عرب امارات کی

D.नेदरलँड्स
D.Netherlands
D.نیدرلینڈ کی

Answer: A.ओमन
A.Oman
A.اومان کی

146 दोन लागोपाठ येणाऱ्या संख्यांच्या वर्गांमधील फरक 47 आहे, तर _____ आणि _____ या संख्या आहेत

The difference between the square of two consecutive numbers is 47, then the numbers are ____ and _____.

دو مسلسل اعداد کے مربع میں فرق 47 کا ہے،اعداد ---- اور ----- ہیں۔

A.24, 25
A.24, 25
A.24, 25

B.23, 24
B.23, 24
B.23, 24

C.22, 23
C.22, 23
C.22, 23

D.21, 22
D.21, 22
D.21, 22

Answer: B.23, 24
B.23, 24
B.23, 24

147

सूचना: खालील आकृतीचे प्रतिबिंब शोधून काढा.

DIRECTIONS: Find the mirror image of the figure given below.

ہدایات: نیچے دیئے گئے شکل کی آئینہ معکوس شکل کیا ہوگی۔

मुख्य आकृती
Main Figure
اصل شکل

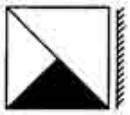

उत्तरासाठी पर्यायी आकृत्या
Answer Figure
جوابی شکل

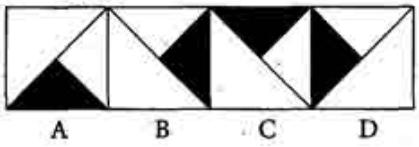

A. (A)

B. (B)

C. (C)

D. (D)

Answer: A. (A)

148

स्लाईड प्रदर्शनासाठी वापरल्या जाणाऱ्या मशीनला म्हणतात

The machine which is being used for exhibiting slides is called—

سلائڈ کی نمائش کے لئے استعمال ہونے والے مشین کو کہا جاتا ہے-

A.फिल्म प्रोजेक्टर
A.Film projector
A.فلم پروجیکٹر

B.स्लाइड प्रोजेक्टर
B.Slide projector
B.سلائیڈ پروجیکٹر

C.टेप रेकॉर्डर
C.Tape recorder
C.ٹیپ ریکارڈر

D.यापैकी कोणतेही नाही
D.None of these
D.ان میں سے کوئی نہیں

Answer:
B.स्लाइड प्रोजेक्टर
B.Slide projector
B.سلائیڈ پروجیکٹر

149 सूचना: प्रत्येक प्रश्नाला एक प्रमुख विधानासोबत चार विधाने आहेत ज्यांच्याखाली A, B, C आणि D असे चार विधान आहेत. क्रमवार विधानांची जोडी निवडा ज्यामध्ये प्रथम विधान दुसऱ्या विधानाला सुचवते, आणि दोन्ही विधाने तर्किकदृष्ट्या प्रमुख विधानासोबत निगडित असेल.

राजधानी स्थलांतरित झाल्यास, लोकांना अडचणींचा सामना करावा लागेल
A. राजधानी बदलली
B. राजधानी बदलली नाही
C. लोकांना अडचणींना तोंड द्यावे लागले
D. लोकांना अडचणींना तोंड द्यावे लागले नाही

DIRECTIONS: Each question has a main statement followed by four statements labelled A, B, C and D. Choose the ordered pair of statements, where the first statement implies the second, and the two statements are logically consistent with the main statement.

If the capital is shifted, the people will face difficulties .
A. the capital was shifted
B. the capital was not shifted
C. the people faced difficulties
D. the people did not face difficulties

ہدایت: ہر سوال میں ایک جملہ ہے جسکے بعد چار جملےاے، بی،سی اور ڈی کے نام سے دئے گئے ہیں اسمیں منسلک جوڑیوں کو چنئے۔ جہاں پہلا جملہ دوسرے جملہ کی اور اشارہ کر رہا ہے اور دو جملے منطقی مرکزی بیان کے مطابق ہیں

گر دارالحکومت شفٹ کیا گیا تو لوگوں کو مشکلات پیش آئیں گی
Aدارالحکومت شفٹ کیا گیا ۔
Bدارالحکومت شفٹ نہیں کیا گیا ۔
Cلوگوں کو مشکلات پیش آئیں ۔
Dلوگوں کو مشکلات پیش نہیں آئیں ۔

A.AC
A.AC
A.AC

B.BC
B.BC
B.BC

C.DA
C.DA
C.DA

D.CD
D.CD
D.CD

Answer: A.AC
A.AC
A.AC

150 प्राचीन ग्रीकांच्या मते काळ्या पित्ताच्या आधिक्यामुळे हे होत असे

According to the ancient Greeks, and excess of Black bile was said to cause

قدیم یونانیوں کےمطابق اور کہا جاتا ہے کہ بلیک بائل کی زیادتی وجہ ہوتی ہے

A.चिंता
A.Anxiety
A.تشویش

B.नैराश्य
B.Depression
B.ڈپریشن

C.भावनिक असहिष्णुता
C.Emotional intolerance
C.جذباتی قوت برداشت

D.ओढ
D.Mania
D.جنون

Answer: B.नैराश्य
B.Depression
B.ڈپریشن

151 15876 चे वर्गमूळ आहे = ?

Square root of 15876 = ?

15876 ؟ = کا مربع روٹ

	A.128 A.128 A.128
	B.126 B.126 B.126
	C.124 C.124 C.124
	D.122 D.122 D.122
Answer:	B.126 B.126 B.126

152	निर्देश: दिलेल्या अंक मालिकेतील चुकीची संज्ञा शोधा: 7, 9, 12, 28.5, 73, 242.625 DIRECTIONS: Find the wrong term in the given number series: 7, 9, 12, 28.5, 73, 242.625 ہدایت دے گئے نمبرس سرج مے غلط نمبر کھوجے 7, 9, 12, 28.5, 73, 242.625
	A.242.625 A.242.625 A.242.625
	B.28.5 B.28.5 B.28.5
	C.73 C.73 C.73
	D.12 D.12 D.12

Answer: C.73
C.73
C.73

153 टेलिकम्युनिकेशनमध्ये कोणत्या निगडित लाटा आहेत?

Which are the relevant waves in telecommunication?

ٹیلی مواصلات میں کونسی متعلقہ لہریں ہوتی ہیں؟

A.क्ष-किरणे
A.X-rays
A.ایکس-شعائیں

B.वायलेट किरणे
B.Violet-rays
B.وائلیٹ شعائیں

C.मायक्रोवेव्हस
C.Microwaves
C.مائیکروویو

D.वरीलपैकी सर्व
D.All of them
D.ان میں سے سبھی

Answer: D.वरीलपैकी सर्व
D.All of them
D.ان میں سے سبھی

154 समुह समुह सदस्यांतील वारंवार संवादाच्या परिणामी तयार केला जातो

Group can form as a result of repeated interactions between the group members

کسی بھی گروپ کی تشکیل گروپ کے ممبران کے باہم باربار ملنے کے نتیجے میں ہوتی ہے۔

A.चूक
A.false
A.غلط

B.बरोबर
B.true
B.صحیح

C.पक्के माहीत नाही
C.Not sure
C.یقین سے نہیں کہہ سکتا، سکتی

D.यापैकी एकही नाही
D.None of these
D.ان میں سے کوئی نہیں

Answer: B.बरोबर
B.true
B.صحیح

155 १० ला आधार ठेऊन स्थान मूल्य संकल्पना विकसित करताना एक शिक्षक एखाद्या वर्गामध्ये पुढील कूटप्रश्न वापरतो 'मी ८ दशांश पेक्षा कमी व चार एकांश आहे. या उपक्रमाचा उद्देश

A teacher uses the following riddle in a class while developing the concept of base 10 and place value
'I am less than 8 tens and 4 ones.'
The objective of this activity is -

بنیادی 10 کو فروغ دینے اور اس کی اہمیت اجاگر کرنے کے لئے کلاس کے دوران ایک استاد مندرجہ ذیل پہیلی کا استعمال کرتا ہے
'میں 8 دہائیوں اور 4 اکائیوں سے کم ہوں.'
– اس سرگرمی کا مقصد ہے کہ

A.वर्गात काही मजा करणे आणि कंटाळा दूर करणे
A.To have some fun in the class and to break monotony
A.کلاس میں کچھ تفریح کرنا اور بدمعاشی ختم کرنے کے لئے

B.१० आधाराची संकल्पना या स्थान मूल्ये आणखी मजबूत करणे
B.To reinforce the concept of base 10 and place value
B.بیس 10 کے نظریہ اور اس کی قدر و قیمت کو مضبوط بنانے کے لئے

C.योगात्मत मूल्यांकन करणे
C.To do summative assessment
C.سمیولیٹو تشخیص کرنے کے لئے

D.विद्यार्थ्यांना दहापट आणि एकांश या विषयांची संकल्पना चा परिचय देणे
D.To introduce the concept of tens and ones to the students
D.طلبا کودہائیوں اور اکائیوں کا تصوردینے کے لئے

Answer: B.१० आधाराची संकल्पना या स्थान मूल्ये आणखी मजबूत करणे
B.To reinforce the concept of base 10 and place value
B.بیس 10 کے نظریہ اور اس کی قدر و قیمت کو مضبوط بنانے کے لئے

156 खालील पैकी कोणते एक कारण जैवविविधतेला धोकादायक आहे?

Which one of the following strongly threatens biodiversity?

مندرجہ ذیل میں سے کس سے بایو ڈائورسٹی کو سخت خطرہ ہے؟

A.नाजूक पर्यावरण परिस्थितीक व्यवस्था जसे मॅनग्राव आणि पाणथळ जागा
A.Fragile ecosystems such as mangroves and wetlands
A. نازک ایکوسسٹم جیسے مینگرو اور جھیلیں

B.हिमालय मधील अपवादात्मक निवासस्थान
B.Inaccessible habitats in the Himalayas
B. ہمالیہ میں ناقابل رسائی رہائش گاہ

C.नैसर्गिक अधिवास आणि झाडांचा विनाश आणि झुमची लागवड
C.Destruction of natural habitats and vegetation, and jhum cultivation
C. قدرتی رہائش گاہ اور پودوں کی تباہی، اور جھوم کاشت

D.बायोस्फीयर साठ्याची निर्मिती
D.Creation of biosphere reserves
D. بایو اسفئر رزرو کی تخلیق

Answer: C.नैसर्गिक अधिवास आणि झाडांचा विनाश आणि झुमची लागवड
C.Destruction of natural habitats and vegetation, and jhum cultivation
C. قدرتی رہائش گاہ اور پودوں کی تباہی، اور جھوم کاشت

157 दिलेल्या आकृतीमध्ये, O हे वर्तुळाचे केंद्रक आहे. वर्तुळाची त्रिज्या 17 सेंमी आहे. जर OC = 8 सेंमी, असेल तर जीवा AB ची लांबी:

In the given figure, O is the center of the circle. Radius of the circle is 17 cm. If OC = 8cm, then the length of the chord AB is:

دی گئی شکل میں، O دائرے کا مرکز ہے۔ دائرے کا رداس 17 سینٹی میٹر ہے۔ اگر OC = 8سینٹی میٹر، پھر AB کی لمبائی ہے:

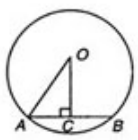

A. 35 सेंमी
35 cm
35سینٹی میٹر

B. 30 सेंमी
30 cm
30سینٹی میٹر

C. 15 सेंमी
15 cm
15سینٹی میٹر

D. 18 सेंमी
18 cm
سینٹی میٹر18

Answer: B. 30 सेंमी
30 cm
سینٹی میٹر30

158 दूरदर्शन हे शिकवतो –

Television imparts teaching of—

ٹیلی ویژن ----کی تعلیم کو ظاہر کرتا ہے

A.वास्तववादी स्वभाव
A.Realistic nature
A.حقیقت پسندانہ فطرت

B.सर्वसमावेशक स्वभाव
B.Comprehensive nature
B.جامع فطرت

C.योग्य मनोरंजन
C.Proper entertainment
C.مناسب تفریح

D.वरील सर्व
D.All the above
D.مذکورہ تمام

Answer: D.वरील सर्व
D.All the above
D.مذکورہ تمام

159 खालील पैकी काय शरीरयष्टी तयार करणारे म्हणून ओळखले जाते?

Which of the following is known as body builder?

مندرجہ ذیل میں سے کیا باڈی بیلڈر کے نام سے جانا جاتا ہے؟

A.कार्बोहायड्रेट
A.Carbohydrates
A.کاربوہائڈریٹ

B.जीवनसत्व
B.Vitamins
B.وٹامن

C.चरबी
C.Fats
C.فیٹ

D.प्रोटीन
D.Protein
D.پروٹین

Answer: D.प्रोटीन
D.Protein
D.پروٹین

160 विभक्त कुटुंबे

Nuclear families

جوہری (نوکلئر) خاندان

A.सर्व संस्कृतींमध्ये तितकेच महत्वाचे आहेत
A.Are equally important in all cultures
A. تمام ثقافتوں میں یکساں طور پر اہم ہیں

B.सर्व संस्कृतींमध्ये तशाच प्रकारे आयोजित केले जातात
B.Are organized in the same way in all cultures
B. تمام ثقافتوں میں ایک ہی طرح سے منظم ہوتے ہیں

C.मुलांच्या समाजीकरणासाठी सर्वत्र जबाबदार आहे
C.Are universally responsible for the socialization of children
C. بچوں کی سماجیکرن کے لئے عالمی سطح پر ذمہ دار ہیں

D.बहुतेक संस्कृतींमध्ये आढळतात, जरी पर्यायी फॉर्म बहुतेक अधिक प्रचलित असले तरी.
D.Are found in a majority of cultures, although alternative forms are often more prevalent.
D. اگرچہ متبادل فارم اکثر زیادہ مقبول ہیں، لیکن ثقافتوں کی اکثریت میں پائے جاتے ہیں .

Answer: D.बहुतेक संस्कृतींमध्ये आढळतात, जरी पर्यायी फॉर्म बहुतेक अधिक प्रचलित असले तरी.
D.Are found in a majority of cultures, although alternative forms are often more prevalent.
D. اگرچہ متبادل فارم اکثر زیادہ مقبول ہیں، لیکن ثقافتوں کی اکثریت میں پائے جاتے ہیں .

161 सूचना: यांपैकी प्रत्येक प्रश्नामध्ये दोन विधानांनंतर तीन निष्कर्ष I, II आणि III क्रमांकाने दर्शविले आहेत. सामान्यपणे माहीत असलेल्या तथ्यांबरोबर जुळत नसली तरी खालील विधाने सत्य आहेत असे समजा आणि दिलेल्या विधानांवरुन तर्कशास्त्राच्या दृष्टीने दिलेल्या निष्कर्षांपैकी कोणते योग्य आहेत ते ठरवा.
निवेदन:
सर्व शहरे नगरे आहेत.
काही शहरे खेडी आहेत.
निष्कर्ष:
I. सर्व खेडी नगरे आहेत.
II. कोणतेही खेडे नगर नाही.
III. काही खेडी नगरे आहेत.

DIRECTION: In each of these questions there are two statements followed by three conclusions numbered I, II and III. You have to take the given statements to be true even if they seem to be at variance from commonly known facts and then decide which of the given conclusion logically follows from the given statements.

Statements:
All cities are towns.
Some cities are villages.

Conclusions:
I. All villages are towns.
II. No village is a town.
III. Some villages are towns.

ہدایت:ان میں سے ہر ایک سوال میں دو بیانات دیے گئے ہیں جن کے بعد تین نتائج نمبر I، II اور III دیے گئے ہیں۔ آپ کو دیے گئے بیانات کو درست تسلیم کرنا ہے اگرچہ وہ عام طور پر معلوم حقائق کے برعکس نظر آتے ہوں اور پھر فیصلہ کریں کہ کن سے دیے گئے نتائج منطقی طور پر دیے گئے بیانات کی پیروی کرتے ہیں۔

بیانات:
سبھی شہر قصبے ہیں۔
کچھ شہر گاؤں ہیں۔

حل:
I. سبھی گاؤں قصبے ہیں۔
II. کوئی گاؤں قصبہ نہیں ہے۔
III. کچھ گاؤں قصبے ہیں۔

A.केवळ निष्कर्ष III निघत असल्यास
A.Only III follows
A.صرف III پیروی کرتا ہے

B.केवळ निष्कर्ष I निघत असल्यास.
B.Only I follows
B.صرف I پیروی کرتا ہے

C.केवळ निष्कर्ष II निघत असल्यास.
C.Only II follows
C.صرف II پیروی کرتا ہے

D.यापैकी कोणतेही नाही
D.None of these
D.ان میں سے کوئی نہیں

Answer: A.केवळ निष्कर्ष III निघत असल्यास
A.Only III follows
A.صرف III پیروی کرتا ہے

162 यापैकी कोणती आकृती हत्ती, लांडगे आणि प्राणी यांच्या दरम्यानचे नाते उत्तमरित्या दर्शवित?

Which of the following diagrams indicates the best relation between Elephants, Wolves and Animals?

مندرجہ ذیل میں سے کون سی ڈایاگرام ہاتھیوں، بھیڑیوں اور جانوروں کے درمیان سب سے بہتر تعلق ہے؟

(A) 

(B) 

(C) 

(D) 

Answer: (B) 

163 निर्देश: खालील शब्दांची इंग्रजी शब्दकोशानुसार मांडणी करा.
(i) Divide
(ii) Division

(iii) Devine
(iv) Divest
(v) Direct

DIRECTIONS: Arrange the following words according to the English Dictionary.
(i) Divide
(ii) Division
(iii) Devine
(iv) Divest
(v) Direct

ہدایت: انگریزی لغت کے مطابق مندرجہ ذیل الفاظ کو مرتب کریں۔
(i) Divide
(ii) Division
(iii) Devine
(iv) Divest
(v) Direct

A.(v), (iv), (iii),(i), (ii)
A.(v), (iv), (iii),(i), (ii)
A.(v), (iv), (iii),(i), (ii)

B.(v), (iv), (i), (iii), (ii)
B.(v), (iv), (i), (iii), (ii)
B.(v), (iv), (i), (iii), (ii)

C.(i), (ii), (iii), (iv), (v)
C.(i), (ii), (iii), (iv), (v)
C.(i), (ii), (iii), (iv), (v)

D.(iii), (v), (iv), (i), (ii)
D.(iii), (v), (iv), (i), (ii)
D.(iii), (v), (iv), (i), (ii)

Answer: D.(iii), (v), (iv), (i), (ii)
D.(iii), (v), (iv), (i), (ii)
D.(iii), (v), (iv), (i), (ii)

164	बाल हेल्पलाईन क्रमांक आहे Child helpline number is چائلڈ ہیلپ لائن نمبر ہے
	A.1098 A.1098 A.1098
	B.1099 B.1099 B.1099
	C.1088 C.1088 C.1088
	D.7098 D.7098 D.7098
Answer:	A.1098 A.1098 A.1098

165 सूचना: खाली दिलेल्या प्रश्नात एक विधान आहे ज्याचे I आणि II असे दोन निष्कर्ष त्याखाली अंकित केलेले आहेत. या आधारे सर्वात योग्य पर्याय निवडा.

विधान:
एका विशिष्ट शाळेत १०वी ची परीक्षा देणारे सर्व विद्यार्थी परीक्षा उत्तीर्ण झाले. नितीन त्याच शाळेतून परीक्षेस बसला होता.

निष्कर्ष:
I. नितीन परीक्षेत उत्तीर्ण झाला.
II. नितीनने परीक्षेत प्रथम स्थान पटकावले.

DIRECTIONS: The question below has a statement followed by two conclusions numbered I and II. Based on this choose the option that is most suitable.

Statement:
In a certain school all the students appearing for class 10 exams passed the exams. Nitin appeared for exam in the same school.

Conclusions:
I. Nitin passed the exam.
II. Nitin topped the exam.

ہدایات: نیچے دیے گئے سوال میں ایک بیان کے بعد دو نتائج I اور II دیے گئے ہیں۔ اس کی بنیاد پر انتہائی موزوں آپشن کا انتخاب کیجیے۔

بیان:
ایک خاص سکول میں کلاس نمبر 10 کا امتحان دینے والے تمام طالب علموں نے امتحان پاس کر لیا. نتن نے اسی اسکول سے امتحان دیا.

نتیجے:
I. نتن نے امتحان پاس کر لیا.
II. نتن نے امتحان میں ٹاپ کیا.

A.केवळ निष्कर्ष क्रमांक I विधानास अनुसरून आहे
A.Only Conclusion I follow
A. صرف نتیجہ I لاگو ہو گا۔

B.केवळ निष्कर्ष क्रमांक II विधानास अनुसरून आहे
B.Only Conclusions II follows
B. صرف نتیجہ II لاگو ہو گا۔

C.निष्कर्ष क्रमांक I किंवा II अनुसरून आहे
C.Either I or II follows
C. I یا II میں سے ایک لاگو ہو گا۔

D.कोणताही निष्कर्ष अनुसरून नाही
D.Neither I nor II follow
D. I اور II میں سے کوئی بھی لاگو نہیں ہو گا۔

Answer: D.कोणताही निष्कर्ष अनुसरून नाही
D.Neither I nor II follow
D. I اور II میں سے کوئی بھی لاگو نہیں ہو گا۔

166 सूचना: अर्थपूर्ण परिच्छेद निर्माण करण्यासाठी, खाली दिलेली (P), (Q) (R), (S) आणि (T) ही पाच वाक्ये योग्य अनुक्रमाने पुनर्रचना करा; त्यांनतर खालील प्रश्नांची उत्तर द्या.

P. कुरुप बदकाकडे पाहून, अन्य सर्व बदक त्याची मजा घेत होते. त्यामुळे नाराज होऊन, बिचारा बदक शेतातून जवळच्या नदीकडे पळाला.
Q. तो नदीत बुडून मरायचा विचार करतो, पण नदीत, कुरूप नव्हे तर एका सुंदर हंसाचे आपले प्रतिबिंब पाहून तो विचार सोडून देतो.
R. दहांपैकी ९ बदके आपल्या आईसारखी दिसत होती. पण दहावे बदक मोठा, राखाडी आणि कुरूप दिसत होता.
S. एका शेतकऱ्याकडे एक बदक होता, त्याने १० अंडी घातली. लवकरच ती सर्व अंडी उबवली.
T. नदीमध्ये जेथे त्याला बुडायची इच्छा होती तिथे त्याला सुंदर, सफेद हंस दिसतात.

पुनर्रचना केल्यानंतर खालीलपैकी कोणते वाक्य पाचवे असेल?

DIRECTION: Rearrange the following five sentences (P), (Q), (R), (S) and (T) in the proper sequence to form a meaningful paragraph; then answer the questions given below them.
P. All the other ducklings made fun of the ugly one. Unhappy in the farm, the poor duckling ran away to a river nearby.
Q. It bends to drown but abandons the idea when sees its reflection in the river, which was not an ugly duckling, but a beautiful swan!
R. Of the ten, nine ducklings looked like the mom. The tenth one was big, grey and ugly.
S. A farmer had a duck, which laid ten eggs. Soon, they all hatched.
T. At the river, where it wanted to get drowned, it sees white, beautiful swans.

Which of the following should be the FIFTH sentence after rearrangement?

ہدایات: ان پانچ جملوں (P)، (Q)، (R)، (S) اور (T) کو با معنی پیرا بنانے کے لئے دوبارہ ترتیب دیجئے، پھر نیچے دے گئے سوالوں کے جواب دیجئے

P. سارے بطخ کے چوزے بدصورت والے کہ مذاک اڈا رہے تھے. کھیت میں ناراض، بیچارہ چوزہ نزدیک کے دریا پی گیا.
Q. یہ ڈھوبنے کے لئے نیچے جکا اور ارادہ مستراق کر دیا جب اسنے دریا میں پرچھائ دیکھی، جو بدصورت چوزہ نہیں تھا، بلکہ ایک خوبصورت ہنس تھا!
R. دس میں سے، نو چوزے اپنی ماں کی طرح تھے. دسوا والا بڈا ، کالا اور بدصورت تھا.
S. زمیندار کے پاس ایک بطخ تھی، جسنے دس انڈے دیے. جلدی ، انسے چوزے نکلے.
T. دریا پی، جہاں یہ ڈھوبنا چاہتا تھا، اسنے سفید، خوبصورت ہنس دیکھا.

دوبارہ ترییب دینے کے بعد کون سا جملہ پانچوہ ہونا چاہیے؟

A.Q
A.Q
A.Q

B.P
B.P
B.P

C.S
C.S
C.S

D.T
D.T
D.T

Answer: A.Q
A.Q
A.Q

167 हवा सर्वत्र आहे' या विषयावर शिकवत असताना शिक्षक विद्यार्थ्यांना खालील प्रश्न विचारतात 'मातीमध्ये हवा आहे का ?', 'पाणीत हवा आहे का?', 'आपल्या शरीरात हवा आहे खालीलपैकी कोणत्या कौशल्य ते शिकणार्यांमध्ये विकसित करण्याचा प्रयत्न आहेत ? का?', ' हाडात हवा आहे का ?

While teaching the topic ‘Air is everywhere’ a teacher asks following questions to the students ‘Is the air in soil?’, ‘Is the air inside water?’, ‘Is the air in our body?’, ‘Is the air inside the bones?’. Which one of the following skills is the teacher trying to develop in learners?

موضوع "ہوا ہر جگہ ہے" کی تعلیم دینے کے دوران ایک استاد طلباء سے مندرجہ ذیل سوالات پوچھتا ہے
کیا مٹی میں ہوا ہے؟'،' کیا پانی میں ہوا ہے؟'،' کیا ہمارے جسم میں ہوا ہے؟'،' کیا ہڈیوں میں ہوا ہے؟'۔'
مندرجہ ذیل میں سے کون سی صلاحیت استاد سیکھنے والوں میں پیدا کرنے کی کوشش کرتا ہے؟

A.वर्गीकरण करण्याचे कौशल
A.Classification skills
A.درجہ بندی کی صلاحیت

B.विचार करण्याचे कौशल
B.Thinking skills
B.سوچنے کی صلاحیت

C.भावनिक कौशल
C.Emotional skills
C.جذبات کی صلاحیت

D.निरीक्षण कौशल
D.Observation skills
D.مشاہدے کی مہارت

Answer: D.निरीक्षण कौशल
D.Observation skills
D.مشاہدے کی مہارت

168 विशिष्ट सांकेतिक भाषेमध्येजर SYMPHONY हा शब्द HBNKSLMB असा कूटबध्द केला जात असेल, PICKLE हा शब्द त्या भाषेत कसा कूटबध्द केला जाईल?

In a certain code language if the word SYMPHONY is coded as HBNKSLMB, then how is the word PICKLE coded in that language?

ایک مخصوص ضابطے کی زبان میں، اگر لفظ SYMPHONY کو HBNKSLMB لفظ اس زبان میں تو ہے، جاتا لکھا کو PICKLE کیسے لکھاجائیگا؟

A.KRXSNR
A.KRXSNR
A.KRXSNR

B.KRWPLV
B.KRWPLV
B.KRWPLV

C.KIXPOV
C.KIXPOV
C.KIXPOV

D.KRXPOV
D.KRXPOV
D.KRXPOV

Answer: D.KRXPOV
D.KRXPOV
D.KRXPOV

169 16% चे अपूर्णांकात रुपांतर करा.

Convert 16% into fraction.

16فیصد کو حصہ میں تبدیل کریں.

A.2/25
A.2/25
A.2/25

B.4/25
B.4/25
B.4/25

	C.6/25 C.6/25 C.6/25
	D.5/25 D.5/25 D.5/25
Answer:	B.4/25 B.4/25 B.4/25
170	निर्देश: मालिका पूर्ण करा EG, JL, ?, TV DIRECTION: Complete the series EG, JL, ?, TV ہدایت اس سرج کو مکمّل کرو EG, JL, ?, TV
	A.PR A.PR A.PR
	B.QO B.QO B.QO
	C.OQ C.OQ C.OQ
	D.RP D.RP D.RP
Answer:	C.OQ C.OQ C.OQ

171

आनुवंशिकतेचे एकक

Unit of heredity

وراثتی اکائی

A.गुणसूत्र
A.Chromosome
A.کروموسوم

B.जनुक
B.Gene
B.جینیاتی

C.फलित पेशी
C.Fertilized cell
C.کھاد والا خلیہ

D.युग्मज
D.Lygote
D.لائگوٹ

Answer:

B.जनुक
B.Gene
B.جینیاتی

172

सूचना: खालील प्रश्नात असे 3 घटक आहेत ज्यांचा परस्परांशी विशिष्ट संबंध आहे. समान संबंध वर्तुळाच्या संचांनी दर्शविलेला आहे, प्रत्येक वर्तुळ त्याचा आकार कितीही असला तरी, एका घटकाचे प्रतिनिधित्व करते. योग्य वर्तुळाच्या संचांशी खालील घटकांच्या जोड्या लावा.

DIRECTION: The question below has three items having certain relationship among them. The same relationship is expressed by sets of circles, each circle representing one item irrespective of its size. Match the items with right set of circles.

ہدایت:مندرجہ ذیل سوال میں تین آئٹم ہیں جن کے مابین مختلف تعلقات ہیں۔ دائروں کے ایک سیٹ کے ذریعہ یکساں تعلق ظاہر کیا جاتا ہے، ہر دائرہ سائز سے قطع نظر ایک آئٹم کی نمائندگی کرتا ہے۔ آئٹم کو دائروں کے درست سیٹ کے ساتھ ملائیں

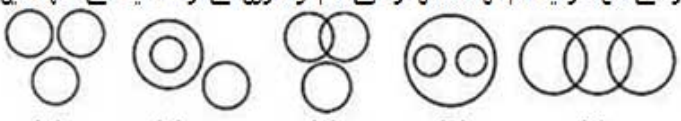

सुशिक्षित व्यक्ती, अभियंता, डॉक्टर
Educated persons, Engineers, Doctors
تعلیم یافتہ لوگ، انجینئر، ڈاکٹر

A. (A)

B. (B)

C. (C)

D. (D)

Answer: D. (D)

173 सूचना: दिलेल्या माहितीचा काळजीपूर्वक अभ्यास करा आणि खालील प्रश्नांची उत्तरे द्या:
सात नृत्ये - हिप हॉप, टॅप डान्स, येंग्को डान्स, बेली डान्स, कथक, साल्सा आणि बॅलेट डान्स सलग सात महिने लागोपाठ आयोजित होणार आहेत (जानेवारीपासून सुरु होऊन जुलै अखेर संपत) ते एकाच क्रमाने होतील हे गरजेचे नाही. एका महिन्यामध्ये केवळ एकच नृत्य आयोजित केले जाऊ शकते. बॅलेट डान्सनंतर केवळ दोन नृत्ये आयोजित केली जातील. साल्सा आणि बॅलेट डान्स दरम्यान केवळ दोन नृत्ये आयोजित केली जातील. टॅप डान्स आणि कथक यांच्यातील केवळ तीन नृत्य आयोजित केले जातील. टॅप नृत्य जुलैमध्ये आयोजित होणार नाही. हिप हॉप बेली डान्स आणि यंग्को नृत्यच्या आधी आयोजित केले जाईल (लगेच आधी असतील असे नाही). बेली डान्सनंतर यंग्को डान्स आयोजित केले जाईल (लगेच आधी असतील असे नाही).
बेली डान्स कोणत्या महिन्यात आयोजित केला जाईल?

DIRECTIONS: Study the given information carefully and answer the given questions:
Seven Dances -Hip Hop, Tap Dance, Yangko Dance, Belly Dance, Kathak, Salsa and Ballet Dance are to be held on seven consecutive months (starting on January and ending on July) not necessarily in the same order. Only one dance can be held on one month. Only two dances will be held after Ballet Dance. Only two dances will be held between Salsa and Ballet Dance. Only three dances will be held between Tap Dance and Kathak. Tap Dance will not be held on July. Hip Hop will be held before Belly Dance and Yangko Dance (not necessarily immediately before). Yangko Dance will be held after Belly Dance (not necessarily immediately after).
Belly Dance will be held on which month?

ہدایات: مندرجہ ذیل معلومات کو دھیان سے پڑھیں اور دیے گئے سوالوں کے جواب دیں۔
سات ڈانس – ہپ ہاپ، ٹیپ ڈانس، یانگکو ڈانس، بیلے ڈانس، کتھک، سالسا اور بیلے ڈانس سات لگاتار مہینوں (جنوری میں شروع اور جولائی میں ختم ہونے والے) میں منعقد کیے جانے ہیں، جن کا یکساں ترتیب میں ہونا ضروری نہیں ہے۔ ایک مہینہ میں صرف ایک ڈانس منعقد کیا جاسکتا ہے۔ بیلے ڈانس کے بعد صرف دو ڈانس منعقد ہوں گے۔ سالسا اور بیلے ڈانس کے درمیان صرف دو ڈانس منعقد ہوں گے۔ ٹیپ ڈانس اور کتھک کے درمیان صرف تین ڈانس منعقد ہوں گے۔ ٹیپ ڈانس کا انعقاد جولائی میں نہیں ہوگا۔ ہپ ہاپ کا انعقاد بیلی ڈانس اور یانگکو ڈانس سے پہلے ہوگا (فوری طور پر پہلے ضروری نہیں ہے)۔ یانگکو ڈانس بیلی ڈانس کے بعد منعقد ہوگا (فوری طور پر بعد میں ضروری نہیں ہے)۔
بیلی ڈانس کس مہینے میں منعقد ہوگا؟

A.जानेवारी
A.January
A.جنوری

B.फेब्रुवारी
B.February
B.فروری

C.मार्च
C.March
C.مارچ

D.एप्रिल
D.April
D.اپریل

Answer: D.एप्रिल
D.April
D.اپریل

174 भारतातील सर्वोच्च विमानतळ कोणते आहे?

Which is the Highest Airport in India?

بھارت میں سب سے زیادہ اونچائی پر کونسا ہوائی اڈہ ہے؟

A.लेह (लदाख)
A.Leh (Ladakh)
A. لداخ) لہ)

B.दिल्ली
B.Delhi
B. دہلی

C.मुंबई
C.Mumbai
C. ممبئی

D.बंगलूरू
D.Bangalore
D. بنگلور

Answer: A.लेह (लदाख)
A.Leh (Ladakh)
A. لداخ) لہ)

175

सूचना: खालील प्रश्नात एकाच फाशाच्या चार अवस्था दाखविल्या आहेत. प्रश्नात विचारलेल्या चिन्हाच्या विरुद्ध बाजूला कोणते चिन्ह असेल?

DIRECTIONS: In the following questions four positions of the same dice are shown. Select the symbol opposite to the symbol as asked in the question.

ہدایات: نیچے کے سوالوں میں، ایک ہی پاسہ کی چار حالتیں دکھائی گئ ہیں اس علامت کو چنئے جو سوال میں پو چھی گئ علامت کے سامنے ہے۔

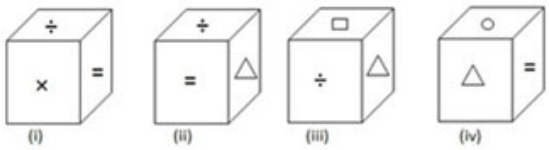

÷ या चिन्हाच्या विरुद्ध बाजूला कोणते चिन्ह असेल?
Which symbol will be opposite to symbol ÷?
÷ کونسا نشان ÷ نشان کی ضد ہوگی؟

A. o

B. =

C. ×

D. Δ

Answer: A. o

176

निर्देश: खालील प्रश्न दिलेल्या शब्दांवर आधारित आहेत.

here/ bright/ pride/ stout

जर सर्व शब्दांची शब्दकोशानुसार मांडणी केली तर कोणता शब्द पहिल्या क्रमांकावर येईल?

DIRECTIONS: Following question is based on the given words.

here/ bright/ pride/ stout

If all the words are arranged according to Dictionary then which words will come first?

ہدایت جیل کے سوال دے ہے لفجونپر مشتمل ہیں

here/ bright/ pride/ stout

لفجونکو لغت کے جیسا لگایا جائے تو پہلا لفج کونسا ایگا

A.Here
A.Here
A.Here

B.Bright
B.Bright
B.Bright

C.Pride
C.Pride
C.Pride

D.Stout
D.Stout
D.Stout

Answer: B.Bright
B.Bright
B.Bright

177 पुढील जोडशब्द पूर्ण करा . ‘ मान ----------’

A.सन्मान

B.मरातब

C.मर्यादा

D.यापैकी सर्व

Answer: D.यापैकी सर्व

178 परीक्षेमध्ये उत्तीर्ण होण्याचे गुण 36% आहेत. जर विद्यार्थ्याला 72 गुण मिळाले आणि तो 18 गुणांनी नापास झाला, तर परीक्षेतील जास्तीत जास्त गुण:

Passing marks in an examination is 36%. If a student gets 72 marks and fails by 18 marks, then the maximum marks of the examination is:

ایک امتحان میں پاسنگ نمبر 36%ہے. اگر ایک طالب علم نے 72 نمبر حاصل کرے اور 18 نمبروں سے ناکام ہوجائے تو، امتحان کے زیادہ سے زیادہ نمبر یہ ہے:

A.100
A.100
A.100

B.200
B.200
B.200

C.250
C.250
C.250

D.400
D.400
D.400

Answer: C.250
C.250
C.250

179 Out of the given four words only one is spelt correctly. Find the word that is correctly spelt.

A.Definitely

B.Compleetly

C.Incidently

D.Immegiatelly

Answer: A.Definitely

180 8 पुरूष आणि 10 महिला एक काम 5 दिवसांत करू शकतात. 12 पुरूष आणि 12 महिला तेच काम $3\frac{1}{2}$ दिवसांत पूर्ण करतात. 2 पुरूष आणि 7 महिला किती दिवसांत तेच काम एकत्रितरित्या पूर्ण करू शकतात?

8 men and 10 women can do a piece of work in 5 days. 12 men and 12 women can do the same work in $3\frac{1}{2}$ days. In how men days 2 men and 7 women will complete the same work, working together?

8 آدمی اور 10 عورتیں ایک کام 5 دن میں کرتی ہیں۔ 12 آدمی اور 12عورتیں اسی کام کو ساڑھے $3\frac{1}{2}$ دن میں کرتی ہیں ۔ 2آدمی اور 7عورتیں مل کر یہ کام کتنے دنوں میں مکمل کریں گی ؟

A. 15

B. 14

C. 21

D. 18

Answer: B. 14

181

खालील प्रश्नात एक आकृतिबंध दाखविला आहे आणि तो कळीची आकृती म्हणून नोंदला आहे. कागदाच्या मागच्या बाजूने बघितल्यास मूळची कळीची आकृती अचूकपणे कशी दिसेल हे तुम्हाला ठरवायचे आहे.

DIRECTIONS: In the following questions, a design is given, marked as key figure. You have to determine which will be the exact view of the original key figure seen from the reverse side of the paper.

ہدایات: نیچے کے سوال میں نقش دیا گیا ہے، جس پر اہم شکل کا نشان لگا ہے آپ کو یہ طے کرنا ہے کہ اہم شکل کا قطعی منظر کاغذ کی الٹی طرف سے کونسا ہوگا؟

मुख्य आकृती
Main Figure
اصل شکل



उत्तरासाठी पर्यायी आकृत्या
Answer Figure
جوابی شکل

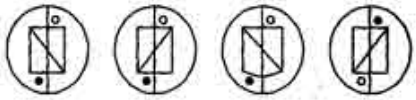

A. (A)

B. (B)

C. (C)

D. (D)

Answer: B. (B)

182 Out of the given options, choose the most appropriate one to fill in the blank.
They _____since four o'clock.

A.have been playing

B.has been playing

C.have playing

D.has played

Answer: A.have been playing

183 P हे शहर नदीच्या खोऱ्यात स्थित आहे. Q हे शहर P या शहराच्या पश्चिमेला आहे. R हे शहर Q या शहराच्या पूर्वेला आहे, परंतु P या शहराच्या पश्चिमेला आहे. S हे शहर T या शहराच्या पूर्वेला आहे, परंतु Q व R या शहरांच्या पश्चिमेला आहे. ही सर्व शहरे शेजारच्या शहरांपासून समान अंतरांवर असल्यास कोणते शहर मध्यभागी आहे?

A town P is located on the river valley. The town Q is in the west of town P. Town R is east of town Q but west of town P. Town S is east of town T but west of town Q and R. If all these towns are situated at equal distances from adjacent towns, which town is in the middle?

شہر P شہر Q ایک ندی کے کنارے واقع ہے- شہر P شہر Q کے مغرب میں ہے- شہر Q شہر R کے مشرق میں ہے لیکن شہر P کے مغرب ہے- شہر S شہر T کے مشرق میں ہے لیکن شہر Q اور R کے مغرب میں واقع ہے- اگر یہ تمام شہر ایک دوسرے سے جوڑتے ہوے برابر کی دوری پر واقع ہیں، تو کونسا شہر بیچ میں ہے؟

A.P
A.P
A.P

B.Q
B.Q
B.Q

C.R
C.R
C.R

D.S
D.S
D.S

Answer: B.Q
B.Q
B.Q

184 ‘ कानावर पडणे ‘ या वाक्प्रचाराचा अर्थ काय ?

A.खरडपट्टी काढणे

B.सहजपणे ऐकू येणे

C.मन कलुषित करणे

D.कळविणे

Answer: B.सहजपणे ऐकू येणे

185 सूचना: प्रत्येक प्रश्नाला एक प्रमुख विधानासोबत चार विधाने आहेत ज्यांच्याखाली A, B, C आणि D असे चार विधान आहेत. क्रमवार विधानांची जोडी निवडा ज्यामध्ये प्रथम विधान दुसऱ्या विधानाला सुचवते, आणि दोन्ही विधाने तर्किकदृष्ट्या प्रमुख विधानासोबत निगडित असेल.

जर हा चित्रपट प्रदर्शित झाला, तर तो वाद निर्माण करेल
A. चित्रपट प्रदर्शित झाला
B. चित्रपट प्रदर्शित झाला नाही
C. त्याने विवाद निर्माण केला
D. त्याने विवाद निर्माण केला नाही

DIRECTIONS: Each question has a main statement followed by four statements labelled A, B, C and D. Choose the ordered pair of statements, where the first statement implies the second, and the two statements are logically consistent with the main statement.

If the movie is released , it will create controversy .
A. the movie was released
B. the movie was not released
C. it created controversy
D. it did not create controversy

ہدایت: ہر سوال میں ایک جملہ ہے جسکے بعد چار جملےاے، بی،سی اور ڈی کے نام سے دئے گئے ہیں اسمیں منسلک جوڑیوں کو چنئے۔ جہاں پہلا جملہ دوسرے جملہ کی اور اشارہ کر رہا ہے اور دو جملے منطقی مرکزی بیان کے مطابق ہیں

اگر یہ فلم ریلیز ہوئی تو تنازعہ کھڑا کرے گی
Aفلم ریلیز ہو گئی تھی ۔
Bفلم ریلیز نہیں ہوئی تھی ۔
Cاس نے تنازعہ کھڑا کیا ۔
Dاس نے تنازعہ کھڑا نہیں کیا ۔

A.AC
A.AC
A.AC

B.BC
B.BC
B.BC

C.DA
C.DA
C.DA

D.CD
D.CD
D.CD

Answer: A.AC
A.AC
A.AC

186 सूचनाः दिलेल्या पर्यायांमधून ऍनालॉगस शब्द निवडा.

अल्टीमीटरचा संबंध अल्टीट्युडसोबत आहे जसा बॅरोमीटरचा ....सोबत आहे.

DIRECTIONS: Choose the analogous word from the given alternatives.

Altimeter is to Altitude as Barometer is to _____.

ہدایات: دیے گئے متبادل سے مطابق لفظ کا انتخاب کریں

آلتمیٹر اگر اونچایی کے متعلق ہے تو بیرومیٹر ------ کے متعلق .

A.द्रव प्रवाह
A.Liquid Flow
A. پانی کا بہاؤ

B.वाऱ्याचा वेग
B.Wind Speed
B. ہوا کی رفتار

C.वातावरणीय दाब
C.Atmospheric Pressure
C. فضایی دباؤ

D.प्रकाशाची तीव्रता
D.Intensity of Light
D. روشنی کی شدّت

Answer: C.वातावरणीय दाब
C.Atmospheric Pressure
C. فضایی دباؤ

187 दोन घटक सिद्धांताचा यांनी प्रस्तावित केला

Two factors theory was proposed by

دو فیکٹر تھیوری کس کی جانب سے پیش کی گئی تھی؟

A.बेनेट
A.Benet
A. بنٹ

B.गार्डनर
B.Gardner
B.گارڈنر

C.स्पियरमॅन
C.Spearman
C. اسپیر مین

D.वेक्स्लर
D.Wechsler
D.ویکسلر

Answer: C.स्पियरमॅन
C.Spearman
C. اسپیر مین

188 ‘डोकेबाज’ या शब्दाचा विरुद्धार्थी शब्द कोणता ?

A.हुशार

B.कल्पक

C.शहाणा

D.ठोंब्या

Answer: D.ठोंब्या

189 अलोगीया म्हणजे:

Alogia is

الجزائربے

A.वजन कमी होणे
A.Reduction in weight
A.وزن میں کمی

B.वाकशक्ति कमी होणे
B.Reduction in speech
B.تقریر میں کمی

C.गती कमी होणे
C.Reduction in speed
C.رفتار میں کمی

D.झोप कमी होणे
D.Reduction in sleep
D. نیند میں کمی

Answer: B.वाकशक्ति कमी होणे
B.Reduction in speech
B.تقریر میں کمی

190 सामान्यत: खालीलपैकी कोणत्या त्रुटी शिक्षकां कडून स्पष्टीकरण देताना होतात

Generally which one of the following errors can be committed by a teacher during demonstration?

عام طور پر مندرجہ ذیل غلطیوں میں سے کونسی غلطی استاد ڈیمانسٹریکشن کے دوران کر سکتا ہے؟

A.प्रात्यक्षिकेच्या विषय आणि उद्दिष्टांमधील अयोग्य समन्वय घडवण्याची चूक
A.The mistake of making poor coordination between the topic and objectives of the demonstration
A.ڈیمانسٹریشن کے موضوع اور مقاصد کے درمیان بری کوآرڈینیشن بنانے کی غلطی

B.विद्यार्थ्यां ची प्रेरणा गमावण्याची चूक
B.To commit mistake of losing motivation in the students
B.طالب علموں میں حوصلہ افزائی کے خاتمے کی غلطی کرنا

C.प्रदर्शनादरम्यान दीर्घकालीन तोंडी शब्दांची चूक
C.The mistake of long continuous verbalism during the demonstration
C.ڈیمانسٹریشن کے دوران طویل مسلسل زبانی بات چیت کی غلطی

D.वरील सर्व
D.All the above
D.مذکورہ تمام

Answer: D.वरील सर्व
D.All the above
D.مذکورہ تمام

191 सोललेल्या भाजीला धुतल्याने हे जीवनसत्व धुतल्या जाते

Washing of peeled vegetables removes the vitamin

چھلکا اتری سبزی کو دھونے سے کونسا وٹامن نکل جاتا ہے؟

A.ए
A.A
A.اے

B.सी
B.C
B.سی

C.डी
C.D
C.ڈی

D.ई
D.E
D.ای

Answer: B.सी
B.C
B.سی

192 निर्देश: खालील व्यवस्था काळजीपूर्वक वाचा आणि खाली दिलेल्या प्रश्नांची उत्तरे द्या:

B 5 R 1@E K 4 F 7©DAM 2 P 3%9 H I W 8*6 U J$V Q#

खालील दिलेल्या पर्याया पैकी वरील व्यवस्थेत डी आणि यू यांच्यातील मध्यभागी नक्की कोणती संख्या\अक्षर आहे

DIRECTIONS: Study the following arrangement carefully and answer the questions given below:

B 5 R 1@E K 4 F 7©DAM 2 P 3%9 H I W 8*6 U J$V Q#

Which of the following is exactly in the middle between D and U in the above arrangement?

ہدایت نیچے دی گی حرف نشان اور نمبرس کی ترتیب کو پڑھئے اور سوالات کا جواب دیجئے

B 5 R 1@E K 4 F 7©DAM 2 P 3%9 H I W 8*6 U J$V Q#

اپری ترتیب میں دی اور یو کے بچو بچ کیا اتا ہیں ؟

A.%
A.%
A.%

B.H
B.H
B.H

C.9
C.9
C.9

D.3
D.3
D.3

Answer: C.9
C.9
C.9

193 $x^2–9x+18=0$ या वर्गसमीकरणाची मुळे आहेत:

The roots of the quadratic equation $x^2–9x+18=0$ are:

$x^2–9x+18=0$ مربع مساوات کے روٹ ہیں:

A.6, 3
A.6, 3
A.6, 3

B.-6,-3
B.-6,-3
B.-6,-3

C.6,-3
C.6,-3
C.6,-3

D.-3, 6
D.-3, 6
D.-3, 6

Answer: A.6, 3
A.6, 3
A.6, 3

194 खालीलपैकी शुद्ध शब्द कोणता ?

A.कुटुंब

B.कुटूंब

C.कूटुंब

D.कूटूंब

Answer: A.कुटुंब

For More Info And Videos About TAIT-Exam Syllabus And Other Exam Visit My Channel
TAIT च्या 30 प्रश्नपत्रिका PDF
BADSHAHimp Available Request 9765226781
WWW.YouTube.com/BADSHAHimp
Subscribe My Channel

195	खालीलपैकी अशुद्ध शब्द कोणता ?
	A.डगमगणे
	B.दचकणे
	C.डचमिळणे
	D.डागाळणे
Answer:	C.डचमिळणे

196	संवैधानिक सुधारणासाठी विधेयक कोण लावू शकते? Who can initiate Bill for constitutional amendments? کون آئینی ترامیم کیلئے بل کا آغاز کر سکتے ہیں؟
	A.फक्त लोकसभा A.Lok Sabha only A.صرف لوک سبھا
	B.संसदेचे कोणतेही घर B.Either house of Parliament B.دونوں میں سے کوئی بھی ایک پارلیمان کے گھر
	C.केवळ राज्यसभा C.Rajya Sabha only C.راجیہ سبھا صرف
	D.यापैकी एकही नाही. D.None of these. D.ان میں سے کوئی بھی نہیں.
Answer:	B.संसदेचे कोणतेही घर B.Either house of Parliament B.دونوں میں سے کوئی بھی ایک پارلیمان کے گھر

197	पारंपारिक शाळांनी त्या तत्त्वावर जास्त जोर दिला की, शिक्षण प्रभावी होण्यासाठी ह्याची गरज आहे The traditional school relied most heavily on the principle that, to be effective, learning had to be - روایتی اسکول میں اس اصول پر زیادہ زور دیا ہے کہ، مؤثر ہونے کے لئے، سیکھنے کا عمل ہونا ہوگا.-

For More Info And Videos About TAIT-Exam Syllabus And Other Exam Visit My Channel
TAIT च्या 30 प्रश्नपत्रिका PDF
BADSHAHimp Available Request 9765226781
WWW.YouTube.com/BADSHAHimp
Subscribe My Channel

A.प्रभावीपणे आनंददायी
A.Affectively pleasant
A.مؤثر خوشگوار

B.वारंवार अभ्यास करत राहणे
B.Exercised repeatedly
B.بار بار مشق کرنا

C.अर्थपूर्ण
C.Meaningful
C.معقول

D.पूर्वीच्या शिकण्यांच्या वेळ आणि जागे शी संबंधित
D.Related in time and place to previous learnings
D.سابقہ سیکھی جانے والی کے ساتھ وقت اور جگہ میں متعلق ہے

Answer: B.वारंवार अभ्यास करत राहणे
B.Exercised repeatedly
B.بار بار مشق کرنا

198 **सूचना:** दिलेली आकृती सारणी (फिगर मॅट्रीक्स) पूर्ण करण्यासाठी, A, B, C, आणि D या चार पर्यायांपैकी योग्य आकृती निवडा.

DIRECTIONS: Select a suitable figure from the four alternatives that would complete the figure matrix.

ہدایات: دیئے گئے اختیارات میں صحیح شکل کا انتخاب کر کے سیریز کو مکمل کیجیئے۔

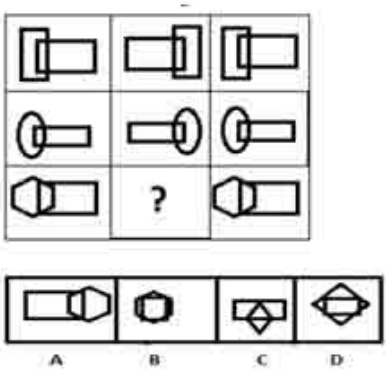

A. (A)

B. (B)

C. (C)

D. (D)

Answer: A. (A)

For More Info And Videos About TAIT-Exam Syllabus And Other Exam Visit My Channel
TAIT च्या 30 प्रश्नपत्रिका PDF
BADSHAHimp Available Request 9765226781
WWW.YouTube.com/BADSHAHimp
Subscribe My Channel

199 सूचना: अर्थपूर्ण परिच्छेद निर्माण करण्यासाठी, खाली दिलेली (P), (Q) (R), (S) आणि (T) ही पाच वाक्ये योग्य अनुक्रमाने पुनर्रचना करा; त्यांनतर खालील प्रश्नांची उत्तर द्या.

P. कुरुप बदकाकडे पाहून, अन्य सर्व बदक त्याची मजा घेत होते. त्यामुळे नाराज होऊन, बिचारा बदक शेतातून जवळच्या नदीकडे पळाला.
Q. तो नदीत बुडून मरायचा विचार करतो, पण नदीत, कुरूप नव्हे तर एका सुंदर हंसाचे आपले प्रतिबिंब पाहून तो विचार सोडून देतो.
R. दहांपैकी ९ बदके आपल्या आईसारखी दिसत होती. पण दहावे बदक मोठा, राखाडी आणि कुरूप दिसत होता.
S. एका शेतकऱ्याकडे एक बदक होता, त्याने १० अंडी घातली. लवकरच ती सर्व अंडी उबवली.
T. नदीमध्ये जेथे त्याला बुडायची इच्छा होती तिथे त्याला सुंदर, सफेद हंस दिसतात.

पुनर्रचना केल्यानंतर खालीलपैकी कोणते वाक्य दुसरे असेल?

DIRECTION: Rearrange the following five sentences (P), (Q), (R), (S) and (T) in the proper sequence to form a meaningful paragraph; then answer the questions given below them.
P. All the other ducklings made fun of the ugly one. Unhappy in the farm, the poor duckling ran away to a river nearby.
Q. It bends to drown but abandons the idea when sees its reflection in the river, which was not an ugly duckling, but a beautiful swan!
R. Of the ten, nine ducklings looked like the mom. The tenth one was big, grey and ugly.
S. A farmer had a duck, which laid ten eggs. Soon, they all hatched.
T. At the river, where it wanted to get drowned, it sees white, beautiful swans.

Which of the following should be the SECOND sentence after rearrangement?

ہدایات: ان پانچ جملوں (P)، (Q)، (R)، (S) اور (T) کو با معنی پیرا بنانے کے لئے دوبارہ ترتیب دیجئے، پھر نیچے دے گئے سوالوں کے جواب دیجئے

P. سارے بطخ کے چوزے بدصورت والے کہ مذاک اڈا رہے تھے. کھیت میں ناراض، بیچارہ چوزہ نزدیک کے دریا پی گیا.
Q. یہ ڈھوبنے کے لئے نیچے جکا اور ارادہ مستراق کر دیا جب اسنے دریا میں پرچھائ دیکھی، جو بدصورت چوزہ نہیں تھا، بلکہ ایک خوبصورت ہنس تھا!
R. دس میں سے، نو چوزے اپنی ماں کی طرح تھے. دسوا والا بڈا ، کالا اور بدصورت تھا.
S. زمیندار کے پاس ایک بطخ تھی، جسنے دس انڈے دیے. جلدی ، انسے چوزے نکلے.
T. دریا پی، جہاں یہ ڈھوبنا چاہتا تھا، اسنے سفید، خوبصورت ہنس دیکھا.

دوبارہ ترییب دینے کے بعد کون سا جملہ دوسرا ہونا چاہیے؟

A.R
A.R
A.R

B.S
B.S
B.S

C.P
C.P
C.P

For More Info And Videos About TAIT-Exam Syllabus And Other Exam Visit My Channel
TAIT च्या 30 प्रश्नपत्रिका PDF
BADSHAHimp Available Request 9765226781
WWW.YouTube.com/BADSHAHimp
Subscribe My Channel

D.Q
D.Q
D.Q

Answer: A.R
A.R
A.R

200 Out of the given four words only one is not spelt correctly. Find the word that is not correctly spelt.

A.Winnar

B.Worthwhile

C.Whether

D.Wednesday

Answer: A.Winnar

For More Info And Videos About TAIT-Exam Syllabus And Other Exam Visit My Channel
TAIT च्या 30 प्रश्नपत्रिका PDF
BADSHAHimp Available Request 9765226781
WWW.YouTube.com/BADSHAHimp
Subscribe My Channel

Question Paper Title : TAIT_PAPER_17

Date of Exam : 2017-12-19 16:00:00.0

1	Out of the given options, choose the most appropriate one to fill in the blank. They _____the bridge for several months.
	A.have been building
	B.has been building
	C.has built
	D.has build
Answer:	A.have been building

2	DIRECTIONS: A sentence with an underlined word is given below. Find the word which is opposite in meaning to the underlined word from the given options. Immigration is a controversial issue in many countries.
	A.Undisputed
	B.Disputable
	C.Debatable
	D.Arguable
Answer:	A.Undisputed

3	$\frac{\sqrt{144}}{\sqrt{64}} = ?$
	A. 3/4
	B. 5/4
	C. 1.5

For More Info And Videos About TAIT-Exam Syllabus And Other Exam Visit My Channel
TAIT च्या 30 प्रश्नपत्रिका PDF
BADSHAHimp Available Request 9765226781
WWW.YouTube.com/BADSHAHimp
Subscribe My Channel

D. 4/5

Answer: C. 1.5

4 दिलेल्या सर्किटमधील संभाव्य फरक मोजण्यासाठी खालीलपैकी कोणत्या उपकरणाचा वापर केला जातो?

Which of the following device is used to measure the potential difference in a given circuit?

مندرجہ ذیل میں سے کس ڈیوائس کا استعمال کسی متعینہ سرکٹ میں ممکنہ فرق کی پیمائش کرنے کے لئے کیا جاتا ہے؟

A.अममिटर
A. Ammeter
A.امیٹر

B.व्होल्टमिटर
B. Voltmeter
B.وولٹ میٹر

C.गाल्व्हनोमिटर
C. Galvanometer
C.گیلوانومیٹر

D.इन्सुलेटर
D. Insulator
D.انسولیٹر

Answer: B.व्होल्टमिटर
B. Voltmeter
B.وولٹ میٹر

5 ओळखीचा परिणाम _____ किंवा प्रसंशित व्यक्तीच्या अपेक्षांना दुजोरा देण्यात होतात

Identification can result in _____ or conforming to the expectations of admired person

شناخت یا تو _____پر منتج ہوتی ہے یا اسے اپنی ممدوح شخصیات کے توقعات تک لے جاتی ہے۔

A.अनुकरण
A.Imitation
A.نقّالی

B.अंकीत करणे
B.Imprinting
B. نقشِ پا کی اتباع

For More Info And Videos About TAIT-Exam Syllabus And Other Exam Visit My Channel
TAIT च्या 30 प्रश्नपत्रिका PDF Available Request 9765226781
BADSHAHimp
YouTube WWW.YouTube.com/BADSHAHimp
Subscribe My Channel

C.मॉडलिंग
C.Modeling
C.موڈلنگ

D.अनुसरण करणे
D.Following
D.پیروی

Answer: C.मॉडलिंग
C.Modeling
C.موڈلنگ

6 7 मी. चालल्यानंतर सोनाली डावीकडे वळली आणि आणखी 12 मी. चालत गेली. पुन्हा ती डावीकडे वळली आणि 4 मी. चालली व त्यानंतर ती उजवीकडे वळली आणि आपल्या मुक्कामी पोहचली आणि आता तिचे तोंड पूर्व दिशेस आहे. सोनालीने आपला प्रवास कोणत्या दिशेस सुरु केला होता?

After walking for 7 m, Sonali turned to her left and walked another 12 m. Again she turned to her left and walked for 4 m after which she turned to her right and reach her destination and now she is facing east. In which direction did Sonali start her journey?

7 میٹر چلنے کے بعد سونالی اپنی بائیں جانب مڑجاتی ہے اور مزید 12 میٹر تک چلتی ہے- دوبارہ وہ پھر سے اپنی بائیں جانب مڑتی ہے اور 4 میٹر تک چلتی ہے جسکے بعد وہ اپنی داہنی جانب مڑتی ہے اور اپنی منزل تک پہنچ جاتی ہے- اور اب اس کا رخ مشرق کی جانب ہے- سونالی نے کس سمت میں اپنا سفر شروع کیا تھا

A.पश्चिम
A.West
A.مغرب

B.पूर्व
B.East
B.مشرق

C.उत्तर
C.North
C.جنوب

D.दक्षिण
D.South
D.شمال

Answer: D.दक्षिण
D.South
D.شمال

For More Info And Videos About TAIT-Exam Syllabus And Other Exam Visit My Channel
TAIT च्या 30 प्रश्नपत्रिका PDF
BADSHAHimp Available Request 9765226781
WWW.YouTube.com/BADSHAHimp
Subscribe My Channel

7 सूचना: दिलेल्या पर्यायांमधून वेगळे ते बाहेर काढा.

DIRECTIONS: Find the odd one out from the given alternatives.

سمت: دیے گئے متبادل میں سے بے جوڑ کو تلاش کرو۔

A.मरुद्यान
A.Oasis
A.نخلستان

B.कारंजे
B.Fountain
B.فوارہ

C.मृगजळ
C.Mirage
C.سراب

D.तळे
D.Pond
D.تالاب

Answer: C.मृगजळ
C.Mirage
C.سراب

8 शाकभक्षी एक असा जीव आहे जो खातो

A herbivore is any organism that consumes

کسی جاندار میں ایک herbivore کھاتا ہے

A.स्वयंपोषी
A.Autotrophs
A.آٹوٹروفس

B.परावलंबी
B.Heterotrophs
B.ہیٹروٹروفس

C.सप्रोफेजेस
C.Saprophages
C.سپروفگس

D.डिट्रायटिव्होर्स
D.Detritivores
D.دتریتیووریس

For More Info And Videos About TAIT-Exam Syllabus And Other Exam Visit My Channel
TAIT च्या 30 प्रश्नपत्रिका PDF
BADSHAHimp Available Request 9765226781
WWW.YouTube.com/BADSHAHimp
Subscribe My Channel

Answer: A.स्वयंपोषी
A.Autotrophs
A.آٹوٹروفس

9 मुलाच्या जन्माच्या वेळी वडीलांचे वय 35 वर्षे होते. किती वर्षांनंतर वडीलांचे वय त्यांच्या मुलाच्या वयाच्या 6 पट असेल?

At the time of his son's birth, the age of a father was 35 years. After how many years the father will be 6 times as old as his son?

بیٹے کی ولادت کے وقت والد کی عمر 35 سال تھی۔کتنے سال بعد والد کی عمر 6 گنا زیادہ ہوگي بیٹے کی عمر کے؟

A.5
A.5
A.5

B.6
B.6
B.6

C.7
C.7
C.7

D.8
D.8
D.8

Answer: C.7
C.7
C.7

10 एखादे मूल सर्जनशील असल्यास ते याचे लक्षण आहे

If a child is creative it is a sign of his

اگر ایک بچہ میں تخلیقی صلاحیت ہے اس کی علامت یہ ہے

A.बुद्धिमत्ता
A.Intelligence
A.ذہانت

B.चांगली स्मरणशक्ती
B.Good memory
B.اچھی یاد داشت

For More Info And Videos About TAIT-Exam Syllabus And Other Exam Visit My Channel
TAIT च्या 30 प्रश्नपत्रिका PDF
BADSHAHimp Available Request 9765226781
WWW.YouTube.com/BADSHAHimp
Subscribe My Channel

C.सर्जनशीलता
C.Creativity
C.تخلیقی صلاحیت

D.स्मृतीभ्रंश
D.Memory loss
D.ذہانت کا نقصان

Answer:
C.सर्जनशीलता
C.Creativity
C.تخلیقی صلاحیت

11 5040 मध्ये कोणती कमीत कमी संख्या जोडली जावी ज्यामुळे एक पूर्ण वर्ग मिळेल?

What least number should be added to 5040 to get the sum a perfect square?

ایک کامل مربع کا حاصل جمع حاصل کرنے کے لیے 5040 میں کون سا سب سے چھوٹا عدد جوڑا جانا چاہیے؟

A.1
A.1
A.1

B.5
B.5
B.5

C.6
C.6
C.6

D.8
D.8
D.8

Answer:
A.1
A.1
A.1

For More Info And Videos About TAIT-Exam Syllabus And Other Exam Visit My Channel
TAIT च्या 30 प्रश्नपत्रिका PDF
BADSHAHimp Available Request 9765226781
WWW.YouTube.com/BADSHAHimp
Subscribe My Channel

12 सूचना: प्रत्येक प्रश्नाला एक प्रमुख विधानासोबत चार विधाने आहेत ज्यांच्याखाली A, B, C आणि D असे चार विधान आहेत. क्रमवार विधानांची जोडी निवडा ज्यामध्ये प्रथम विधान दुसऱ्या विधानाला सुचवते, आणि दोन्ही विधाने तर्किकदृष्ट्या प्रमुख विधानासोबत निगडित असेल.

लोक एकतर वाजवी आहेत किंवा अवाजवी आहेत.
A. लोक वाजवी आहेत.
B. लोक वाजवी नाहीत.
C. लोक अवाजवी आहेत.
D. लोक अवाजवी नाहीत.

DIRECTIONS: Each question has a main statement followed by four statements labelled A, B, C and D. Choose the ordered pair of statements, where the first statement implies the second, and the two statements are logically consistent with the main statement.

The people are either reasonable or unreasonable
A.The people are reasonable
B.The people are not reasonable
C. The people are unreasonable
D. The people are not unreasonable

ہدایت: ہر سوال میں ایک جملہ ہے جسکے بعد چار جملےاے، بی،سی اور ڈی کے نام سے دئے گئے ہیں اسمیں منسلک جوڑیوں کو چنئے۔ جہاں پہلا جملہ دوسرے جملہ کی اور اشارہ کر رہا ہے اور دو جملے منطقی مرکزی بیان کے مطابق ہیں

لوگ یا معقول ہوتے ہیں یا غیر معقول
Aلوگ معقول ہیں ۔
Bلوگ معقول نہیں ہیں ۔
Cلوگ غیر معقول ہیں ۔
Dلوگ غیر معقول نہیں ہیں ۔

A.BD
A.BD
A.BD

B.DA
B.DA
B.DA

C.CA
C.CA
C.CA

D.AB
D.AB
D. AB

Answer: B.DA
B.DA
B.DA

For More Info And Videos About TAIT-Exam Syllabus And Other Exam Visit My Channel
TAIT च्या 30 प्रश्नपत्रिका PDF
BADSHAHimp Available Request 9765226781
WWW.YouTube.com/BADSHAHimp
Subscribe My Channel

13 सूचना: खाली दिलेल्या प्रश्नात एक विधान आहे ज्याचे I आणि II असे दोन निष्कर्ष त्याखाली अंकित केलेले आहेत. या आधारे सर्वात योग्य पर्याय निवडा.

विधान:
सहानुभूतीची मागणी करणाऱ्या तुरुंगातील सर्व राजकीय कैद्यांना क्षमा झाली. खुनाच्या खटल्यात सहभागी असलेल्या कोणालाही माफ केले नाही.

विधान:
I. तुरुंगातील राजकीय कैदी जे खुनात दोषी ठरवले गेले त्यांना क्षमा केले.
II. तुरुंगातील राजकीय कैदी जे खुनात दोषी ठरवले गेले त्यांना क्षमा नाही केले.

DIRECTIONS: The question below has a statement followed by two conclusions numbered I and II. Based on this choose the option that is most suitable.

Statement:
All political prisoners in a jail who asked for mercy were pardoned. Nobody involved in the murder was pardoned.

Conclusions:
II. Political prisoners in the jail convicted of murder were pardoned.
II. Political prisoners in the jail were not convictedof murder.

ہدایات: نیچے دیے گئے سوال میں ایک بیان کے بعد دو نتائج I اور II دیے گئے ہیں۔ اس کی بنیاد پر انتہائی موزوں آپشن کا انتخاب کیجیے۔

بیان:
جیل میں تمام سیاسی قیدیوں نے رحم کی درخواست کی ہے. قتل میں ملوث کسی کو معاف نہیں کیا گیا تھا.

نتیجے:
II. جیل میں سیاسی قیدیوں کی سزا پر سزا دی گئی.
II. جیل میں سیاسی قیدیوں کو قتل نہیں کیا گیا تھا.

A.केवळ निष्कर्ष क्रमांक I विधानास अनुसरून आहे
A.Only Conclusion I follows
A.صرف نتیجہ I لاگو ہو گا۔

B.केवळ निष्कर्ष क्रमांक II विधानास अनुसरून आहे
B.Only Conclusions II follows
B.صرف نتیجہ II لاگو ہو گا۔

C.निष्कर्ष क्रमांक I किंवा II अनुसरून आहे.
C.Either I or II follows
C. I یا II میں سے ایک لاگو ہو گا۔

D.कोणताही निष्कर्ष अनुसरून नाही
D.Neither I nor II follow
D. I اور II میں سے کوئی بھی لاگو نہیں ہو گا۔

For More Info And Videos About TAIT-Exam Syllabus And Other Exam Visit My Channel
TAIT च्या 30 प्रश्नपत्रिका PDF
BADSHAHimp Available Request 9765226781
YouTube WWW.YouTube.com/BADSHAHimp
Subscribe My Channel

Answer: D.कोणताही निष्कर्ष अनुसरून नाही
D.Neither I nor II follow
D. I اور II میں سے کوئی بھی لاگو نہیں ہو گا۔

14 खालीलपैकी द्विदल धान्य कोणते आहे?

Which of the following is dicotyledonous plant?

پودا مندرجہ ذیل میں سے کون ہے؟ ڈائی کوٹی لیڈونس (dicotyledonous)

A.बांबू
A.Bamboo
A. بانس

B.केळी
B.Banana
B. کیلا

C.उस
C.Sugarcane
C. گنا

D.मोहरी
D.Mustard
D. سرسوں

Answer: D.मोहरी
D.Mustard
D. سرسوں

For More Info And Videos About TAIT-Exam Syllabus And Other Exam Visit My Channel
TAIT च्या 30 प्रश्नपत्रिका PDF
BADSHAHimp Available Request 9765226781
WWW.YouTube.com/BADSHAHimp
Subscribe My Channel

15 सूचना: हे प्रश्न खालील माहितीवर आधारित आहेत.
सहा मुले - A, B, C, D, E आणि F हे रांग -I मध्ये उत्तर दिशेकडे बघत बसलेले आहेत आणि सहा मुली P, Q, R, S, T आणि U रांग -II मध्ये दक्षिण दिशेकडे बघत बसलेल्या आहेत. रांग -I मधील प्रत्येक व्यक्ती रांग -II मधल्या एक व्यक्तीच्या अगदी समोर बसली आहे.
T हा D च्या विरुद्ध बसलेला आहे, जो कुठल्याही अंतिम टोकावर बसलेला नाही. P हि T च्या तात्काळ डावीकडे आहे. E हि कोणत्याही टोकाला बसलेली नाही तसेच D च्या बाजूला हि बसलेली नाही. U हि C च्या समोर बसलेली आहे, जो F च्या डावीकडून दुसरा आहे. बरोबर तीन व्यक्ती P आणि U च्या मध्ये बसलेले आहेत. Q किंवा R हे दोन्हीही U चे शेजारी नाहीत. S हि Q च्या समीप बसलेली नाही. B हा A च्या उजवीकडे आहे.
A आणि C च्या बरोबर मध्ये कोण बसलेला आहे?

DIRECTIONS: These questions are based on the following information.
Six boys - A, B, C, D, E, and F are sitting in row-I facing to the North and six girls P, Q, R, S, T and U – are sitting in row - II facing to the South. Each person from row-I is facing exactly one person in row-II. T is sitting opposite D, who is not sitting at any of the extreme end. P is to the immediate left of T. E is neither sitting at any extreme end nor adjacent to D. U is sitting opposite C, who is second to the left of F. Exactly three persons are sitting between P and U. Neither Q nor R are neighbours of U. S is not sitting adjacent to Q. B is to the right of A.
Who is sitting exactly between A and C?

ہدایات: یہ سوالات مندرجہ ذیل معلومات پر مبنی ہیں۔
چھ لڑکے - A، B، C، D، E اور F – قطار I- میں شمال کا رخ کیے ہوئے بیٹھے ہیں اور چھ لڑکیاں P، Q، R، S، T اور U – قطار II- میں ایک شخص کے ٹھیک سامنے بیٹھا ہے۔ II- میں ہر شخص قطار I- میں جنوب کا رخ کیے ہوئے بیٹھی ہیں۔ قطار
T، D نہ تو کسی انتہائی سرے پر E کے فوری بائیں طرف ہے۔ P، T کے بالمقابل بیٹھی ہے، جو کسی بھی انتہائی سرے پر نہیں بیٹھا ہے۔ کے درمیان ٹھیک تین U اور P کے بائیں طرف سے دوسرا ہے۔ F کے بالمقابل بیٹھی ہے، جو U، C کے بغل میں بیٹھا ہے۔ D اور نہ ہی کے دائیں طرف ہے۔ B، A کے بغل میں نہیں بیٹھی ہے۔ S، Q کے پڑوسی ہیں۔ R، U نہ ہی Q لوگ بیٹھے ہیں۔ نہ تو
A اور C کے ٹھیک درمیان کون بیٹھا ہے؟

A.D
A.D
A.D

B.E
B.E
B.E

C.B
C.B
C.B

D.F
D.F
D.F

Answer: D.F
D.F
D.F

16	x चे 15% = 20% y असल्यास, x: y आहे: If 15% of x = 20% y then x: y is: اگر x 15% کا = y تو 20% کا x:y ہوگا۔
	A.3:2 A.3:2 A.3:2
	B.4:3 B.4:3 B.4:3
	C.17:16 C.17:16 C.17:16
	D.16:17 D.16:17 D.16:17
Answer:	B.4:3 B.4:3 B.4:3
17	सूचना: दिलेल्या पर्यायांमधून वेगळे ते बाहेर काढा. DIRECTIONS: Find the odd one out from the given alternatives. سمت: دیے گئے متبادل میں سے بے جوڑ کو تلاش کرو۔
	A.वसतिगृह A.Hostel A.ہاسٹل
	B.हॉटेल B.Hotel B.ہوٹل
	C.धर्मशाळा C.Inn C.مسافر خانہ
	D.क्लब D.Club D.کلب

Answer: D.क्लब
D.Club
D.کلب

18 दिलेली अदलाबदल : चिन्हे ÷ आणि ×, तसेच आकडे 4 आणि 6; तर 3 × 4÷ 6 चे मूल्य किती ?

Given interchanges: signs ÷ and ×, and numbers 4 and 6; then the value of 3 × 4 ÷ 6 is

دیئے گئے تبادلے: علامات ÷ اور ×، اور نمبر 4 اور 6؛ تو 3 ×4÷6 کی تعداد ہے

A.4
A.4
A.4

B.8
B.8
B.8

C.2
C.2
C.2

D.6
D.6
D.6

Answer: C.2
C.2
C.2

19 सूचना: हे प्रश्न खालील माहितीवर आधारित आहेत.
सहा मुले - A, B, C, D, E आणि F हे रांग -I मध्ये उत्तर दिशेकडे बघत बसलेले आहेत आणि सहा मुली P, Q, R, S, T आणि U रांग -II मध्ये दक्षिण दिशेकडे बघत बसलेल्या आहेत. रांग -I मधील प्रत्येक व्यक्ती रांग -II मधल्या एक व्यक्तीच्या अगदी समोर बसली आहे.
T हा D च्या विरुद्ध बसलेला आहे, जो कुठल्याही अंतिम टोकावर बसलेला नाही. P हि T च्या तात्काळ डावीकडे आहे. E हि कोणत्याही टोकाला बसलेली नाही तसेच D च्या बाजूला हि बसलेली नाही. U हि C च्या समोर बसलेली आहे, जो F च्या डावीकडून दुसरा आहे. बरोबर तीन व्यक्ती P आणि U च्या मध्ये बसलेले आहेत. Q किंवा R हे दोन्हीही U चे शेजारी नाहीत. S हि Q च्या समीप बसलेली नाही. B हा A च्या उजवीकडे आहे.
दिलेल्या माहितीच्या आधारावर, खाली दिलेल्या पाच पैकी चार जण एका विशिष्ट प्रकारे समान आहेत आणि अशा प्रकारे ते एक गट तयार करतात. त्या समूहाचे कोण सदस्य नाही ते शोधा?

DIRECTIONS: These questions are based on the following information.
Six boys - A, B, C, D, E, and F are sitting in row-I facing to the North and six girls P, Q, R, S, T and U – are sitting in row - II facing to the South. Each person from row-I is facing exactly one person in row-II.
T is sitting opposite D, who is not sitting at any of the extreme end. P is to the immediate left of T. E is neither sitting at any extreme end nor adjacent to D. U is sitting opposite C, who is second to the left of F. Exactly three persons are sitting between P and U. Neither Q nor R are neighbours of U. S is not sitting adjacent to Q. B is to the right of A.
Four of the following five are alike in a certain way based on the given information and so form a group. Find the one which does not belong to that group?

ہدایات: یہ سوالات مندرجہ ذیل معلومات پر مبنی ہیں۔
A، B، C، D، E اور F – قطار I- میں شمال کا رخ کیے ہوئے بیٹھے ہیں اور چھ لڑکیاں P، Q، R، S، T اور U – قطار II- چھ لڑکے - میں ایک شخص کے ٹھیک سامنے بیٹھا ہے۔ II- میں ہر شخص قطار I- میں جنوب کا رخ کیے ہوئے بیٹھی ہیں۔ قطار
T، D نہ تو کسی انتہائی سرے پر E کے فوری بائیں طرف ہے۔ P، T کے بالمقابل بیٹھی ہے، جو کسی بھی انتہائی سرے پر نہیں بیٹھا ہے۔ کے درمیان ٹھیک تین U اور P کے بائیں طرف سے دوسرا ہے۔ F کے بالمقابل بیٹھی ہے، جو C، U کے بغل میں بیٹھا ہے۔ D اور نہ ہی
کے دائیں طرف ہے۔ B، A کے بغل میں نہیں بیٹھی ہے۔ S، Q کے پڑوسی ہیں۔ R، U نہ ہی Q لوگ بیٹھے ہیں۔ نہ تو
دی گئی معلومات کی بنیاد پر مندرجہ ذیل پانچ میں سے چار ایک خاص طریقہ میں ایک جیسے ہیں اور اس طرح ایک گروپ کی تشکیل کرتے ہیں۔ ایسے شخص کو تلاش کریں جس کا تعلق اس گروپ سے نہیں ہے؟

A.Q – A
A.Q – A
A.Q – A

B.R – E
B.R – E
B.R – E

C.F – T
C.F – T
C.F – T

D.B – T
D.B – T
D.B – T

Answer: D.B – T
D.B – T
D.B – T

20 सूचना: दिलेल्या पर्यायांमधून वेगळे ते बाहेर काढा.

DIRECTIONS: Find the odd one out from the given alternatives.

سمت: دیے گئے متبادل میں سے بے جوڑ کو تلاش کرو۔

A.525
A.525
A.525

B.39
B.39
B.39

C.24
C.24
C.24

D.426
D.426
D.426

Answer: C.24
C.24
C.24

21 **सूचना:** खालील प्रश्नात उत्तरातील पर्यायांपैकी कोणत्या पर्यायी आकृतीत प्रश्नातील आकृती अंतर्भूत आहे?

DIRECTIONS: In the given question find the answer figure in which question figure is embedded.

ہدایات: دیئے گئے سوال میں جواب والی شکل دریافت کیجیئے جس میں سوال والی شکل سرایت کرگئی ہے۔

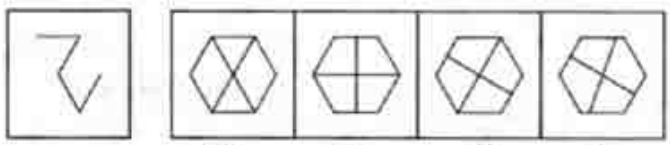

A. (A)

B. (B)

C. (C)

D. (D)

Answer: A. (A)

22 आयएसएल ही _____ ची स्पर्धा आहे –

The ISL is a tournament of-

دی آئی ایس ایل مقابلہ ہے :

A.क्रिकेट
A.Cricket
A.کرکٹ کا

B.फुटबॉल
B.Football
B.فٹبال کا

C.हॉकी
C.Hockey
C.ہاکی کا

D.कबड्डी
D.Kabaddi
D.کبڈی کا

Answer: B.फुटबॉल
B.Football
B.فٹبال کا

23 भारताच्या तिरंग्यामधील केशरी रंगा काय दर्शवतो?

What does the saffron colour in the India tricolor represent?

بھارت کے ترنگے میں کیسریا رنگ ظاہر کرتا ہے:

A.सामर्थ्य आणि धैर्य
A.Strength & courage
A.طاقت اور جرات

B.शांती आणि सत्य
B.Peace & Truth
B.امن اور سچائی کو

C.सुपीकता वृध्दी आणि जमिनीचे मांगल्य
C.Fertility growth & auspiciousness of land
C.زمین کی زراعت اور پاکیزگی کی ترقی

D.यांपैकी कोणतेही नाही
D.None of these
D.انمیں سے کوئی نہیں

Answer: A.सामर्थ्य आणि धैर्य
A.Strength & courage
A.طاقت اور جرات

24 निर्देश: खालीदिलेल्या अक्षराच्या क्रमात काही अक्षरे गहाळ केली आहेत ते त्या क्रमाने खाली दिलेल्या पर्यायांपैकी एक आहे

abc_cde_defgd_fgh_

DIRECTIONS: In each of the following letter series, same of the letters are missing which are given in that order as one of the alternatives below it.

abc_cde_defgd_fgh_

دایت جیل کے حرف سرج میں کوئی حرف گمشدہ ہے آپکو انکی شناخت جیل کے اختیارات سے کرنی ہے

abc_cde_defgd_fgh_

A.cdfi
A.cdfi
A.cdfi

B.bcei
B.bcei
B.bcei

C.abcd
C.abcd
C.abcd

D.cefi
D.cefi
D.cefi

Answer: B.bcei
B.bcei
B.bcei

25 सूचना: अर्थपूर्ण परिच्छेद निर्माण करण्यासाठी, खाली दिलेली (P), (Q) (R), (S) आणि (T) ही पाच वाक्ये योग्य अनुक्रमाने पुनर्रचना करा; त्यांनतर खालील प्रश्नांची उत्तर द्या.

P. पशूपेक्षा लहान प्राणी बरा असे म्हणत, शिकारी कुत्र्याची ही धावपळ पाहून शेळीचा कळप त्याचा उपहास करतो.
Q. एके दिवशी, एक मोठा आणि शक्तिशाली शिकारी कुत्रा एका सशाच्या मागे धावत होता.
R. लांबवर पळाल्यानंतर कंटाळून शिकारी कुत्रा शिकार शोधून देतो.
S. आमच्यातला तो फरक आहे."
T. त्याला शिकारी कुत्रा उत्तर देतो : ससा आपल्या जीवासाठी धावत होता आणि मी फक्त खाण्यासाठी धावत होतो.

पुनर्रचना केल्यानंतर खालीलपैकी कोणते वाक्य पाचवे असेल?

DIRECTION: Rearrange the following five sentences (P), (Q), (R), (S) and (T) in the proper sequence to form a meaningful paragraph; then answer the questions given below them.
P. A herd of goats watching this mocks the hound, saying that the little one is better than the beast.
Q. One day, a strong and powerful hound was chasing a hare.
R. After running for a long time, the tired hound gives up the hunt.
S. That is the difference between us."
T. To this, the hound responds: "The rabbit was running for its life, I was only running for dinner.

Which of the following should be the FIFTH sentence after rearrangement?

ہدایات: ان پانچ جملوں (P)، (Q)، (R)، (S) اور (T) کو با معنی پیرا بنانے کے لئے دوبارہ ترتیب دیجئے، پھر نیچے دے گئے سوالوں کے جواب دیجئے

P. بکریوں کے کافلا ہلکار کی نکل کرنے لگے ، یہ کہکر کہ ایک چھوٹا والا بیرحم جانور سے اچھا ہے.
Q. ایک دن ، ایک مضبوط اور طاقتور ہلکار خرگوش کہ پیچھا کر رہا تھا.
R. زیادہ دیر تک دھووڈ نے کے بعد، تھکے ہلکار نے شکار چھوڈ دیا.
S. وہی ہم دونو کے درمیان فرق ہے.
T. اسس پر، ہلکار نے جواب دیا: "خرگوش اپنی جان کے لئے بھاگ رہا ہے، میں خالی اپنے کھانے کے لئے بھاگ رہا ہوں.

دوبارہ ترییب دینے کے بعد کون سا جملہ پانچوہ ہونا چاہیے؟

A.S
A.S
A.S

B.R
B.R
B.R

C.P
C.P
C.P

D.T
D.T
D.T

Answer: A.S
A.S
A.S

26 सामान्यत: यश चाचणी हि आहे

Generally achievement tests are—

عام طور پر کامیابیوں کے ٹیسٹ ہیں—

A.सामर्थ्य चाचणी
A.Power tests
A.پاور ٹیسٹنگ

B.वेग चाचणी
B.Speed tests
B.سپیڈ ٹیسٹ

C.योग्यता चाचणी
C.Aptitude tests
C.استحکام ٹیسٹ

D.विद्यार्थी क्षमता चाचणी
D.Students ability tests
D.طلباء کی صلاحیتوں کا ٹیسٹ

Answer: D.विद्यार्थी क्षमता चाचणी
D.Students ability tests
D.طلباء کی صلاحیتوں کا ٹیسٹ

27 DIRECTIONS: A sentence with an underlined word is given below. Find the Word which is most similar in meaning to the underlined word.
Floods and earthquakes are natural <u>disasters.</u>

A.Catastrophes

B.Blessings

C.Advantages

D.Protection

Answer: A.Catastrophes

28

विधान:
विद्यार्थी ग्रेड एका विशिष्ट शहरात घसरण होत आहेत.

कृतीचा कोर्स:
I. मुलांना व्यायाम करायला किमान 35 मिनिटे खर्च करावे लागतील.
II. प्रौढांनी व्यायामासाठी किमान 45 मिनिटे खर्च करावी.

Statement:
Student grades are falling in a certain city.

Course of actions:
I. Children should spend at least 35 minutes in exercise.
II. Adults should spend at least 45 minutes in exercise

بیان:
ایک مخصوص شہر میں طلباء کے گریڈ کم ہو رہے ہیں۔

لائحہ عمل:
I۔ بچوں کو کم از کم 35 منٹ ایکسرسائز کرنی چاہیے۔
II۔ بالغوں کو کم از کم 45 منٹ ایکسرسائز کرنی چاہیے۔

A.फक्त I अनुसरून आहे
A.Only I follows
A. صرف I لاگو ہو گا۔

B.फक्त II अनुसरण करते आहे
B.Only II follows
B. صرف II لاگو ہو گا۔

C.एकतर I किंवा II अनुसरून आहे
C.Either I or II follows
C. I یا II میں سے ایک لاگو ہو گا۔

D.I किंवा II दोन्हीपैकी काहीही अनुसरण करत नाही
D.Neither I nor II follows
D. I اور II میں سے کوئی بھی لاگو نہیں ہو گا۔

Answer:

D.I किंवा II दोन्हीपैकी काहीही अनुसरण करत नाही
D.Neither I nor II follows
D. I اور II میں سے کوئی بھی لاگو نہیں ہو گا۔

29 आहारामध्ये अपुऱ्या आयोडिनमुळे हे होते

Insufficient dietary iodine can cause

کھانے میں آیوڈین کی کمی سے _____ ہو سکتا ہے۔

A.क्रिटिनिझम
A. Cretinism
A.بچے میں ذہنی اور جسمانی کمزوری

B.जाइंट बिल्ड
B. Giant builds
B.جیانٹ بیلڈ

C.वाढलेली थायरॉईड
C. Enlarged thyroid
C.تھائرائڈ بڑھنا

D.लहान थायरॉईड
D. Small thyroid
D.تھائرائڈ چھوٹا ہونا

Answer: C.वाढलेली थायरॉईड
C. Enlarged thyroid
C.تھائرائڈ بڑھنا

30 समजा आपण विद्यार्थ्यांची उत्तरपत्रिका तपासणी करत आहात, अचानकपणे आपले लाल रिफील संपते आणि आपण एक विद्यार्थीला बोलवून रिफील आणण्या साठी सांगता. अशा परिस्थितीत आपण काय करू इच्छिता

Suppose you are checking student's answer books, all of a sudden you have finished red refill, you call a student and order him to bring a refill. What would you like to do in such a situation?

فرض کریں کہ آپ طالب علم کے جوابی کاپیوں کی جانچ پڑتال کر رہے ہیں، اچانک آپ کے قلم سے سیاہی ختم ہو جاتی ہے آپ ایک طالب علم کو فون کرتے ہیں اور اسے سیاہی لینے کے لئے کہتے ہیں.ایسی صورتحال میں آپ کیا کرنا چاہتے ہیں؟

A.आपण मॉनिटरला वर्गावर लक्ष ठेवायला सांगून स्वतः रिफील घेऊन याल
A.You will ask the class monitor to mind the class and get a refill yourself
A.آپ کلاس کی مانیٹر سے پوچھیں گے کہ آپ کو کلاس کو ذہن میں رکھنا اور اپنے آپ کو ریفئل کرنا ہوگا

B.आपण रिफील साठी विद्यार्थ्याला आवश्यक पैसे द्याल
B.You will give him required money for the purpose
B.آپ کو اس مقصد کے لئے رقم کی ضرورت ہوگی

C.आपल्याला असे वाटते की त्या विद्यार्थ्याचे पैसे शिक्षकांचे स्वत: चे पैसे आहेत
C.You think that student's money is teachers' own money
C.آپ سوچتے ہیں کہ طالب علم کے پیسے اساتذہ کے اپنے پیسے ہیں

D. आपण अशा लहान रकमेसाठी पैसे देत आहोत ह्याची आपल्याला लाज वाटेल
D.You will feel ashamed when you will be paying for such a small amount.
D.جب آپ اس طرح کی چھوٹی سی رقم کے لئے ادائیگی کی جائے گی تو آپ شرمندہ ہوں گے.

Answer: A.आपण मॉनिटरला वर्गावर लक्ष ठेवायला सांगून स्वतः रिफील घेऊन याल
A.You will ask the class monitor to mind the class and get a refill yourself
A.آپ کلاس کی مانیٹر سے پوچھیں گے کہ آپ کو کلاس کو ذہن میں رکھنا اور اپنے آپ کو ریفئل کرنا ہوگا

31 जीवशास्त्रज्ञ व प्राणीशास्त्रज्ञ ही याची उदाहरणे आहेत

A Biologist and zoologists are examples of

ایک ماہر علم حیات اور ماہر علم حیوانات ایک بہترین مثال ہیں

A.नैसर्गिक बुद्धिमत्ता
A.naturalistic intelligence
A. فطرتی ذہانت

B.सर्वसामानविषयक बुद्धिमत्ता
B.spatial intelligence
B.مکانی قابلیت کی ذہانت

C.भाषिक बुद्धिमत्ता
C.linguistic intelligence
C.زبانی ذہانت

D.शारीरिक किमयात्मक
D.bodily kinesthetic
D.جسمانی عضلاتی حس

Answer: A.नैसर्गिक बुद्धिमत्ता
A.naturalistic intelligence
A. فطرتی ذہانت

32 श्रीमती स्मृती इराणी हया _____ च्या केंद्रीय मंत्री आहेत –

Smt. Smriti Irani is the Union Minister for-

شریمتی اسمرتی ایرانی وزیر ہیں :

A.मानव संसाधन विकास
A.Human Resource Development
A.ہیومن رسورسیس ڈیولپمنٹ

B.माहिती आणि प्रसारण
B.Information & Broadcasting
B.انفارمیشن اینڈ براڈ کاسٹنگ

C.वरीलपैकी दोन्ही
C.Both of the above
C.اوپر دئیے ہوے دونوں کی

D.यांपैकी कोणतेही नाही
D.None of these
D.انمیں سے کوئی نہیں

Answer: B.माहिती आणि प्रसारण
B.Information & Broadcasting
B.انفارمیشن اینڈ براڈ کاسٹنگ

33 सूचना: अर्थपूर्ण परिच्छेद निर्माण करण्यासाठी, खाली दिलेली (P), (Q) (R), (S) आणि (T) ही पाच वाक्ये योग्य अनुक्रमाने पुनर्रचना करा; त्यांनतर खालील प्रश्नांची उत्तर द्या.

P. पशूपेक्षा लहान प्राणी बरा असे म्हणत, शिकारी कुत्र्याची ही धावपळ पाहून शेळीचा कळप त्याचा उपहास करतो.
Q. एके दिवशी, एक मोठा आणि शक्तिशाली शिकारी कुत्रा एका सशाच्या मागे धावत होता.
R. लांबवर पळाल्यानंतर कंटाळून शिकारी कुत्रा शिकार शोधून देतो.
S. आमच्यातला तो फरक आहे."
T. त्याला शिकारी कुत्रा उत्तर देतो : ससा आपल्या जीवासाठी धावत होता आणि मी फक्त खाण्यासाठी धावत होतो.

पुनर्रचना केल्यानंतर खालीलपैकी कोणते वाक्य दुसरे असेल?

DIRECTION: Rearrange the following five sentences (P), (Q), (R), (S) and (T) in the proper sequence to form a meaningful paragraph; then answer the questions given below them.
P. A herd of goats watching this mocks the hound, saying that the little one is better than the beast.
Q. One day, a strong and powerful hound was chasing a hare.
R. After running for a long time, the tired hound gives up the hunt.
S. That is the difference between us."
T. To this, the hound responds: "The rabbit was running for its life, I was only running for dinner.

Which of the following should be the SECOND sentence after rearrangement?

ہدایات: ان پانچ جملوں (P)، (Q)، (R)، (S) اور (T) کو با معنی پیرا بنانے کے لئے دوبارہ ترتیب دیجئے، پھر نیچے دے گئے سوالوں کے جواب دیجئے

P. بکریوں کے کافلا ہلکار کی نکل کرنے لگے ، یہ کہکر کہ ایک چھوٹا والا بیرحم جانور سے اچھا ہے.
Q. ایک دن ، ایک مضبوط اور طاقتور ہلکار خرگوش کہ پیچھا کر رہا تھا.
R. زیادہ دیر تک دھووڈ نے کے بعد، تھکے ہلکار نے شکار چھوڈ دیا.
S. وہی ہم دونو کے درمیان فرق ہے.
T. اسس پر، ہلکار نے جواب دیا: "خرگوش اپنی جان کے لئے بھاگ رہا ہے، میں خالی اپنے کھانے کے لئے بھاگ رہا ہوں.

دوبارہ ترییب دینے کے بعد کون سا جملہ دوسرا ہونا چاہیے؟

A.R
A.R
A.R

B.Q
B.Q
B.Q

C.P
C.P
C.P

D.T
D.T
D.T

Answer: A.R
A.R
A.R

34 1000 मध्ये मिळवावी अशी सर्वांत लहान संख्या, ज्यामुळे त्या बेरजेला 45 ने पूर्ण भाग जाईल?

The smallest number to be added to 1000, so that 45 divides the sum exactly, is?

سب سے چھوٹا عدد جسے 1000 میں جمع کیا جائے تو مجموعہ 45 کے ساتھ پورا پورا تقسیم ہو سکے؟

A.35
A.35
A.35

B.80
B.80
B.80

C.20
C.20
C.20

D.10
D.10
D.10

Answer: A.35
A.35
A.35

35	तीन नाणी उधळली. 2 छापे आणि 1 काटा मिळण्याची संभाव्यता? Three coins are tossed. What is the probability of getting 2 head and 1 tails? تین سکوں کو اچھالا گیا ہے. 2 ہیڈ اور 1 ٹیل حاصل کرنے کا امکان کیا ہے؟
	A.1/2 A.1/2 A.1/2
	B.3/8 B.3/8 B.3/8
	C.2/3 C.2/3 C.2/3
	D.3/4 D.3/4 D.3/4
Answer:	B.3/8 B.3/8 B.3/8
36	Choose the word which is most similar in meaning to the given word. MADNESS
	A.Insanity
	B.Balance
	C.Stability
	D.Wisdom
Answer:	A.Insanity

37 दोन पाईप्स A आणि B हे टाकी अनुक्रमे 6 आणि 8 मिनिटांमध्ये भरतात, जर A ने काम सुरू केले आणि मग ते दर एक मिनिटाला एक अशाप्रकारे आलटून पालटून चालू केले गेले, टाकी भरायला किती वेळ लागेल?

Two pipes A and B can fill a cistern in 6 and 8 minutes respectively. If A starts the work and they be turned on alternatively for one minute each, how long will it take to fill the cistern?

کام شروع کرے اور ہر ایک منٹ میں وہ متبادل کام کریں A ایک سسٹم کو بالترتیب 6 اور 8 منٹ میں بھر سکتے ہیں، اگرB اورA دو پائپ تو سسٹم بھرنے میں کتنا وقت لگے گا؟

(A) $3\frac{3}{7}$ minutes/ मिनिटे / منٹ

(B) 6 minutes / मिनिटे/ منٹ

(C) $6\frac{3}{4}$ minutes /मिनिटे/ منٹ

(D) $6\frac{6}{7}$ minutes / मिनिटे/ منٹ

Answer: (C) $6\frac{3}{4}$ minutes /मिनिटे/ منٹ

38 अनुक्रम 7, 14, 21,.....चे 6वे पद शोधा

Find the 6th term of the sequence: 7, 14, 21,.....

.....21 ,14 ,7 :اس سرج کی چھٹی ٹرم کیا ہے ؟

A.40
A.40
A.40

B.42
B.42
B.42

C.44
C.44
C.44

D.48
D.48
D.48

Answer: B.42
B.42
B.42

39 ‘शालीन’ या शब्दाचा विरुद्धार्थी शब्द कोणता ?

A.विनीत

B.नम्र

C.उर्मट

D.शाल पांघरलेला

Answer: C.उर्मट

40 संस्कृती सामाजिक संदर्भ प्रदान करते ज्यामध्ये लोक खऱ्याअर्थाने वाढतात आणि त्यांच्याभोवतीच्या जगाला समजतात हे विधान यांनी मांडले.

Culture provides a social context in which people true, grow and understand the world around them was argued by

کلچر ایک ایسا معاشرتی سیاق مہیا کراتا ہے جس میں لوگوں کی صحیح معنوں میں نشوونما ہوتی ہے اور اپنے گردوپیش دُنیا کو سمجھنے کے اہل ہوتے ہیں، یہ مفہوم پیش کیا گیا بذریعہ

A.व्यागोस्टकी
A.Vygotsky
A.ویگوسکی (Vygotsky)

B.मास्लो
B.Maslow
B.ماسلو (Maslow)

C.स्टॅनफोर्ड बेनेट
C.Stanford Benet
C.اسٹن فورڈ بنٹ(Stanford Benet)

D.सि.एच.राईस
D.C.H. Rice
D.سی-ایچ-رائس

Answer: A.व्यागोस्टकी
A.Vygotsky
A.ویگوسکی (Vygotsky)

41

$\left(2-\frac{1}{3}\right)\left(2-\frac{3}{5}\right)\left(2-\frac{5}{7}\right)\ldots\ldots\left(2-\frac{997}{999}\right)$ बरोबर किती:

$\left(2-\frac{1}{3}\right)\left(2-\frac{3}{5}\right)\left(2-\frac{5}{7}\right)\ldots\ldots\left(2-\frac{997}{999}\right)$ is equal to:

$\left(2-\frac{1}{3}\right)\left(2-\frac{3}{5}\right)\left(2-\frac{5}{7}\right)\ldots\ldots\left(2-\frac{997}{999}\right)$ یہ برابر ہے:

(A) $\frac{1001}{999}$

(B) $\frac{999}{1001}$

(C) $\frac{1001}{3}$

(D) $\frac{5}{1001}$

Answer: (C) $\frac{1001}{3}$

42

सूचना: दिलेली आकार सारणी (फिगर मॅट्रीक्स) पूर्ण करण्यासाठी, A, B, C, आणि D या चार पर्यायांपैकी योग्य आकृती निवडा.

DIRECTIONS: Select a suitable figure from the four alternatives that would complete the figure matrix.

ہدایات: نیچے دیئے گئے سوال میں، دیئے گئے متبادلات میں سے متعلق متبادل چنئے۔

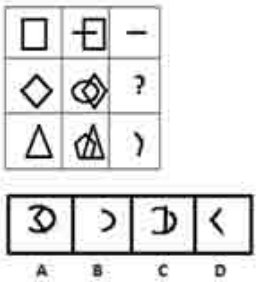

A. (A)

B. (B)

C. (C)

D. (D)

Answer: B. (B)

43 ग्रंथालयात 30% पुस्तकं इंग्रजी आहेत, 50% पुस्तकं हिंदीमध्ये आहेत आणि उर्वरित 500 पुस्तकं इतर भाषेमध्ये आहेत. ग्रंथालयातील पुस्तकांची एकूण संख्या?

In a library 30% books are in English, 50% books are in Hindi and the remaining 500 are in other languages. What is the total number of books in the library?

ایک لائبریری میں 30% کتابیں انگریزی میں ہیں، 50% کتابیں ہندی میں ہیں اور باقی 500 دیگر زبانوں میں ہیں. لائبریری میں کتابوں کی مجموعی تعداد کیا ہے؟

A.2700
A.2700
A.2700

B.2750
B.2750
B.2750

C.2555
C.2555
C.2555

D.2500
D.2500
D.2500

Answer: D.2500
D.2500
D.2500

44 सूचना: दिलेल्या पर्यायांमधून वेगळे ते बाहेर काढा.

DIRECTIONS: Find the odd one out from the given alternatives.

سمت: دیے گئے متبادل میں سے بے جوڑ کو تلاش کرو۔

A.डागडुजी करणे
A.Repair
A.مرمت کرنا

B.दुरुस्ती करणे
B.Mend
B.ٹھیک کرنا

C.चूक दुरुस्त करणे
C.Correct
C.درست کرنا

D.त्रास
D.Trouble
D.تکلیف

Answer: D.त्रास
D.Trouble
D.تکلیف

45 यापैकी कोणती वेन डायग्राम मित्र, मार्गदर्शक आणि तत्वज्ञ यांच्या दरम्यानचे नाते दर्शवते?

Which of the following Venn Diagram gives the relationship between Friend, Guide and Philosopher?

مندرجہ ذیل وین ڈایاگراموں میں سے کون سی دوست، گائیڈ اور فلسفی کے درمیان تعلقات فراہم کرتی ہے؟

(A) 

(B) 

(C) 

(D) 

Answer: (C) 

46 खालील वाक्यांशी अध्यापन आपण कसे स्पष्ट करू शकता

How can you define teaching in relation to following phrases?

آپ مندرجہ ذیل جملے کے سلسلے میں تعلیم کی وضاحت کیسے کرسکتے ہیں؟

A.हे दोन व्यक्तींमधील समोरासमोर प्रक्रिया आहे
A.It is a face-to-face interactional process between two individuals
A.یہ دو افراد کے درمیان آمنا سامنا ہے

B.ही एक अर्थपूर्ण प्रक्रिया आहे
B.It is a purposeful process
B.یہ ایک معقول عمل ہے

C.हे उपचारात्मक प्रक्रिया आहे
C.It is a remedial process
C.یہ ایک اصلاحاتی عمل ہے

D.वरील सर्व
D.All the above
D.مذکورہ تمام

Answer: D.वरील सर्व
D.All the above
D.مذکورہ تمام

47 सूचना: खालील प्रत्येक प्रश्नात, तीन विधाने दिली आहेत, ज्यांच्यानंतर चार निष्कर्ष आहेत ज्यांना I, II, III आणि IVअसे अंकित केले आहे. सर्वसामान्यपणे ज्ञात असलेल्या तथ्यांशी विसंगती असली तरीही, हे सत्य असल्याचे तात्पुरते मानून, सामान्यतः ज्ञात असलेल्या तथ्यांकडे दुर्लक्ष करून, दिलेल्या निष्कर्षांपैकी कोणती तर्कशुद्धपणे विधानांचे अनुसरण करतात ते ठरवा.
विधाने :
सर्व सम विषम असतात.
काही सम अविभाज्य असतात.
सर्व अविभाज्य अंक असतात.
निष्कर्ष:
I. काही विषम अविभाज्य असतात.
II. सर्व विषम अविभाज्यअसतात.
III. सर्व विषम सम असतात.
IV. काही अंक सम असतात.

DIRECTION: In each of the following questions, three statements followed by four conclusions marked I, II, III and IV are given. Consider the statements to be true, even though they seem to be at variance with the commonly known facts and find out which of the given conclusion(s) logically fallow(s) the statements, disregarding the commonly known facts.

Statements:
All even are odd.
Some even are prime.
All prime are digits.

Conclusions:
I. Some odd are prime.
II. All odd are prime.
III. All odd are even.
IV. Some digits are even.

ہدایت: مندرجہ ذیل ہر ایک سوال میں، تین بیانات دیے گئے ہیں جن کے بعد چار نتائج دیے گئے ہیں جنھیں I، II، III اور IV سے نشان زد کیا گیا ہے۔ بیانات کے درست ہونے پر غور کریں، اگرچہ وہ عام طور پر معلوم حقائق کے برعکس نظر آتے ہوں اور تلاش کریں کہ کون سے دیے گئے نتائج منطقی طور پر بیانات کی پیروی کرتے ہیں، عام طور پر معلوم حقائق سے قطع نظر۔

بیانات:
سبھی جفت طاق ہیں۔
کچھ جفت مفرد ہیں۔
سبھی مفرد اعداد ہیں۔
حل:
I. کچھ طاق مفرد ہیں۔
II. سبھی طاق مفرد ہیں۔
III. سبھی طاق جفت ہیں۔
IV. کچھ اعداد جفت ہیں۔

A.केवळ निष्कर्ष I आणि II निघत असल्यास.
A.Only I and II follow
A.صرف I اور II پیروی کرتے ہیں

B.केवळ निष्कर्ष II आणि III निघत असल्यास.
B.Only II and III follow
B.صرف II اور III پیروی کرتے ہیں

C.केवळ निष्कर्ष I आणि IV निघत असल्यास.
C.Only I and IV follow
C.صرف I اور IV پیروی کرتے ہیں

D.केवळ निष्कर्ष I आणि III निघत असल्यास.
D.Only I and III follow
D.صرف I اور III پیروی کرتے ہیں

Answer: C.केवळ निष्कर्ष I आणि IV निघत असल्यास.
C.Only I and IV follow
C.صرف I اور IV پیروی کرتے ہیں

48 कौशल्य शिकण्यास प्रभावी मार्गदर्शन देण्यासाठी, प्रशिक्षक सक्षम असणे आवश्यक आहे

In order to give effective guidance to the learning of a skill, the instructor must necessarily be able—

—ایک مہارت کو سیکھنے کے لئے مؤثر رہنمائی دینے کے لئے، استاد کے لئے اس قابل ہونا ضروری ہے

A.उच्च दर्जाची पूर्णता असलेल्या कौशल्य अंमलात आणणे
A.To execute the skill with a high degree of perfection
A.اعلی درجے کے کمال کے ساتھ مہارت کو انجام دینے کے لئے

B.प्रशिक्षित करण्याचा प्रयत्न करत असलेल्या व्यक्तीपेक्षा उच्च दर्जाची परिपूर्ण असलेली कौशल्ये कार्यान्वित करण्यासाठी
B.To execute the skill with a higher degree of perfection than the person he is trying to instruct
B.صلاحیت کو اعلی کمال کےساتھ انجام دینا بمقابلہ اس شخص کے جو ابھی سیکھنے کی کوشش کرر رہا ہے

C.विद्यार्थ्यांना शिकवण्याकरता कौशल्याचे स्वरूपाचा अंतर्ज्ञान विकसित करणे
C.To develop the student's insight into the nature of the skill to be learned
C.سیکھنے کے لئے مہارت کی نوعیت میں طالب علم کی بصیرت کو فروغ دینا

D.वाईट सवयींचा विकास होत असल्याचे आधीच समजणे आणि ते पठार होण्या आधी त्यांना रोखणे इत्यादी
D.To foresee and forestall the development of bad habits, the occurrence of plateaus, etc.
D.خراب عادات کی پیشگوئی، ان کی ترقی میں رکاوٹ کی تیاری، اور خوشی کا انعقاد وغیرہ۔

Answer: C.विद्यार्थ्यांना शिकवण्याकरता कौशल्याचे स्वरूपाचा अंतर्ज्ञान विकसित करणे
C.To develop the student's insight into the nature of the skill to be learned
C.سیکھنے کے لئے مہارت کی نوعیت میں طالب علم کی بصیرت کو فروغ دینا

49 'झुगारणे' या शब्दाचा विरुद्धार्थी शब्द कोणता ?

A.स्वीकारणे

B.जुगार खेळणे

C.अमान्य करणे

D.भिरकावणे

Answer: A.स्वीकारणे

50 Out of the given options, choose the one which is the correct indirect speech of the sentence given below.
Bob said, “I was playing cricket”.

A.Bob said that he had been playing cricket.

B.Bob says that he have been playing cricket.

C.Bob said that he have been playing cricket.

D.Bob says that he was playing cricket.

Answer: A.Bob said that he had been playing cricket.

51 'UNDERESTIMATED' पासून खालील शब्दांपैकी कोणते शब्द तयार केले जाऊ शकत नाहीत?

Which of the following words cannot be formed from:
'UNDERESTIMATED'?

مندرجہ ذیل الفاظ میں سے کونسا 'UNDERESTIMATED' سے نہیں بنایا جاسکتا ہے

A.TIMER
A.TIMER
A.TIMER

B.ESTEEM
B.ESTEEM
B.ESTEEM

C.EARTH
C.EARTH
C.EARTH

D.DIRT
D.DIRT
D.DIRT

Answer: C.EARTH
C.EARTH
C.EARTH

52 खालीलपैकी सर्वांत मोठा अपूर्णांक शोधा

Find the largest of the following fractions

مندرجہ ذیل کسور میں سے سب سے بڑی کسر تلاش کریں

A.231/349
A.231/349
A.231/349

B.352/478
B.352/478
B.352/478

C.453/584
C.453/584
C.453/584

D.759/894
D.759/894
D.759/894

Answer: D.759/894
D.759/894
D.759/894

53 स्वामा ही वाहिकाची सासू आहे जी दिशांतची आई आहे. रवीश हा रोनितचा वडील आहे, जो दिशांतचा एकुलता मुलगा आहे. स्वामा आणि दिशांत यांचे नाते काय?

Swarna is mother-in-law of Vahika who is mother of Dishant. Raveesh is father of Ronit, the only brother of Dishant. How is Swarna related to Dishant?

سوارنہ واحکا کی ساس ہے جو دشانت کی ماں ہے. رویش رونت کا باپ ہے جو دشانت کا واحد بھائی ہے. سوارنہ کا دشانت سے کیا رشتہ ہے؟

A.सासू
A.Mother-in-law
A.ساس

B.काकू
B.Aunt
B.چا چی

C.पत्नी
C.Wife
C.بیوی

D.आजी
D.Grandmother
D.نانی

Answer: D.आजी
D.Grandmother
D.نانی

54 निर्देश: खाली दिलेले प्रश्न वर्ण मालिकेवर आधारित आहेत. या प्रत्येक मालिकेत, काही अक्षरे गहाळ आहेत. योग्य पर्याय निवडा पाच पेक्षा अधिक अक्षरे गहाळ असल्यास, मालिकेतील शेवटचे पाच अक्षरे निवडा .

ab - - ta - xy - - b - - - - -

DIRECTION: Questions given below are based on the letter series. In each of these series, some letters are missing. Select the correct alternative. If more than five letters are missing, select the last five letters of the series:

ab - - ta - xy - - b - - - - -

ہدایت نیچے دے ہے سوالات حرف سرج پر مشتمل ہیں . ہر میں کہیں حرف گمشدہ ہے . سہی اختیارات کو چنے . اگر پچ حرف گنمام ہو تو آخری پانچ حرفونکو چنے

ab - - ta - xy - - b - - - - -

A.xyabt
A.xyabt
A.xyabt

B.xybat
B.xybat
B.xybat

C.xytab
C.xytab
C.xytab

D.xtaby
D.xtaby
D.xtaby

Answer: C.xytab
C.xytab
C.xytab

55 खालीलपैकी शुद्ध वाक्य कोणते ?

A.गावाचे पुनर्वसन करण्यासाठी त्यांनी अर्ज केला.

B.गावचे पुनर्वसन करण्यासाठी त्यांनी अर्ज केला.

C.गावाचे पुनर्वसन करण्यामधे त्यांनी अर्ज केला.

D.गावाचे पुनर्वसन करण्याद्वारे त्यांनी अर्ज केला.

Answer: A.गावाचे पुनर्वसन करण्यासाठी त्यांनी अर्ज केला.

56 दिलेल्या प्रतिसादांपैकी खालील शब्दांचा अर्थपूर्ण क्रम कोणता असेल?

डॉक्टर, ताप, औषध, मेडीकल शॉप

Which one of the given responses would be a meaningful order of the following words?

Doctor, Fever, Medicine, Medical Shop

دیےگیے جوابات میں سے کونسا ایک مندرجہ ذیل الفاظ کی معنی خیز ترتیب ہوگی؟

ڈاکٹر، بخار، طب، طبی دکان

A. मेडीकल शॉप, औषध, ताप, डॉक्टर
A.Medical Shop, Medicine, Fever, Doctor
A.طبی دکان، دوا، بخار، ڈاکٹر

B. ताप, डॉक्टर, मेडीकल शॉप, औषध
B.Fever, Doctor, Medical Shop, Medicine
B.بخار، ڈاکٹر، میڈیکل شاپ، میڈیکل

C. डॉक्टर, मेडीकल शॉप, औषध, ताप
C.Doctor, Medical Shop, Medicine, Fever
C.ڈاکٹر، میڈیکل شاپ، میڈیکل، بخار

D. औषध, डॉक्टर, मेडीकल शॉप, ताप
D.Medicine, Doctor, Medical Shop, Fever
D.طب، ڈاکٹر، طبی دکان، بخار

Answer: B. ताप, डॉक्टर, मेडीकल शॉप, औषध
B.Fever, Doctor, Medical Shop, Medicine
B.بخار، ڈاکٹر، میڈیکل شاپ، میڈیکل

57 दोन संख्यांचा मसावी आणि लसावी अनुक्रमे 84 आणि 21 आहे. जर दोन संख्यांचे गुणोत्तर 1:4 असेल, तर मोठी संख्या कोणती?

The H.C.F. and L.C.M. of two numbers are 84 and 21 respectively. If the ratio of the two numbers is 1:4, then the larger number is?

ایچ سی.ایف اور ایل سی ایم. دو نمبروں میں بالترتیب 84 اور 21 ہیں۔ اگر دو نمبروں کا تناسب 4: 1 ہے، تو کیا بڑی رقم ہے؟

A.12
A.12
A.12

B.36
B.36
B.36

C.48
C.48
C.48

D.84
D.84
D.84

Answer: D.84
D.84
D.84

58 सूचना: खालील प्रश्नांमध्ये दिलेल्या पर्यायांमधून संबंधित अक्षर/शब्द/संख्या निवडा.

संकेत: वाहतूक ::

DIRECTIONS: In the following question, select the related letter/word/number from the given alternatives.

SIGNAL: TRAFFIC ::

سمت: مندرجہ ذیل سوال میں، دیے گئے متبادل سے متعلقہ حرف/لفظ/نمبر منتخب کریں۔

:: سگنل : ٹریفک

A.दार : घर
A.Door : House
A.دروازہ : گھر

B.धरण : नदी
B.Dam : River
B.ڈیم : ندی

C.भिंग : प्रकाश
C.Lens : Light
C.لینس : روشنی

D.ब्रेक : चाक
D.Brake : Wheel
D.بریک : پہیہ

Answer: D.ब्रेक : चाक
D.Brake : Wheel
D.بریک : پہیہ

59 सूचना: दिलेल्या पर्यायांमधून वेगळे ते बाहेर काढा.

DIRECTIONS: Find the odd one out from the given alternatives.

سمت: دیے گئے متبادل میں سے بے جوڑ کو تلاش کرو۔

A.IJNR
A.IJNR
A.IJNR

B.MPSV
B.MPSV
B.MPSV

C.QTWZ
C.QTWZ
C.QTWZ

D.GJMP
D.GJMP
D.GJMP

Answer: A.IJNR
A.IJNR
A.IJNR

60 सूचना: खालील प्रश्नांमध्ये दिलेल्या पर्यायांमधून संबंधित अक्षर/शब्द/संख्या निवडा.

7584: 5362 : : 4673:?

DIRECTIONS: In the following question, select the related letter/word/number from the given alternatives.

7584: 5362 : : 4673:?

سمت: مندرجہ ذیل سوال میں، دیے گئے متبادل سے متعلقہ حرف/لفظ/نمبر منتخب کریں۔

7584: 5362 : : 4673:?

A.2367
A.2367
A.2367

B.2451
B.2451
B.2451

C.2531
C.2531
C.2531

D.यांपैकी कोणतीही नाही
D.None of these
D.ان میں سے کوئی نہیں

Answer: B.2451
B.2451
B.2451

61 **सूचना:** दिलेल्या चारांपैकी वेगळी (असंबद्ध) असणारी आकृती शोधून काढा.

DIRECTIONS: Find the odd figure from the given four figures.

ہدایات: دیئے گئے چار شکلوں میں سے طاق شکل کونسی ہے؟

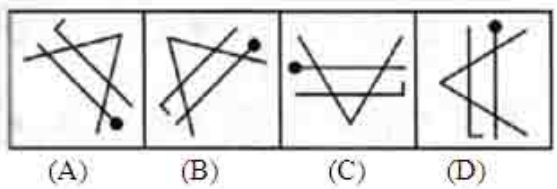

A. (A)

B. (B)

C. (C)

D. (D)

Answer: A. (A)

62 एका स्त्रीकडे बोट दाखवून, एक पुरुष म्हणतो, “ती माझ्या भावाच्या बहिणीच्या वडिलांची मुलगी आहे” मग फोटोतल्या त्या स्त्रीचे पुरुषासोबत नाते काय?

Pointing towards a lady, a man said, “She is the daughter of the father of the sister of my brother”. How is the lady in photograph related to man?

عورت کی طرف اشارہ کرکے ، آدمی نے کہا،" یے میرے بھائی کی بہن کے باپ کی بیٹی ہے". تصویر میں اس عورت کا آدمی سے کیا رشتہ تھا؟

A.मुलगी
A.Daughter
A.بیٹی

B.पत्नी
B.Wife
B.بیوی

C.आई
C.Mother
C.ماں

D.बहीण
D.Sister
D.بہن

Answer: D.बहीण
D.Sister
D.بہن

63 16 सेंमी आणि 8 सेंमी बाजू असलेल्या आयताच्या कर्णरिषेची लांबी (सेंमीमध्ये) काढा.

Find the length of diagonal (in cm) of a rectangle whose sides are 16 cm and 8 cm.

قطر کی لمبائی (سینٹی میٹرمیں) تلاش کریں جن کے اطراف 16 سینٹی میٹر اور 8 سینٹی میٹر ہیں.

A.15.89
A.15.89
A.15.89

B.16.89
B.16.89
B.16.89

C.19.89
C.19.89
C.19.89

D.17.89
D.17.89
D.17.89

Answer: D.17.89
D.17.89
D.17.89

64 सूचना: प्रत्येक प्रश्नाला एक प्रमुख विधानासोबत चार विधाने आहेत ज्यांच्याखाली A, B, C आणि D असे चार विधान आहेत. क्रमवार विधानांची जोडी निवडा ज्यामध्ये प्रथम विधान दुसऱ्या विधानाला सुचवते, आणि दोन्ही विधाने तर्किकदृष्ट्या प्रमुख विधानासोबत निगडित असेल.

जर एखाद्याला दंड होईल, तर त्याला त्याची लाज वाटेल
A. एखाद्याला दंड झाला
B. एखाद्याला दंड झाला नाही
C. त्याला त्याची लाज वाटली
D. त्याला त्याची लाज वाटली नाही

DIRECTIONS: Each question has a main statement followed by four statements labelled A, B, C and D. Choose the ordered pair of statements, where the first statement implies the second, and the two statements are logically consistent with the main statement.

If one gets punished , one feels ashamed
A. One got punished
B. One did not get punished
C. one felt ashamed
D. one did not feel ashamed

ہدایت: ہر سوال میں ایک جملہ ہے جسکے بعد چار جملےاے، بی،سی اور ڈی کے نام سے دئے گئے ہیں اسمیں منسلک جوڑیوں کو چنئے۔ جہاں پہلا جملہ دوسرے جملہ کی اور اشارہ کر رہا ہے اور دو جملے منطقی مرکزی بیان کے مطابق ہیں

جب کسی کو سزا ملتی ہے تو اسے شرمندگی محسوس ہوتی ہے
Aکسی کو سزا ملی ۔
Bکسی کو سزا نہیں ملی ۔
Cکسی نے شرمندگی محسوس کی ۔
Dکسی نے شرمندگی محسوس نہیں کی ۔

A.AC
A.AC
A.AC

B.BC
B.BC
B.BC

C.DA
C.DA
C.DA

D.CD
D.CD
D.CD

Answer: A.AC
A.AC
A.AC

65

$$\sqrt{\frac{(1)^2 + (9)^2 + 18}{16}} = ?$$

A. 2

B. 2.5

C. 3.5

D. 4

Answer: B. 2.5

66 सूचना: अर्थपूर्ण परिच्छेद निर्माण करण्यासाठी, खाली दिलेली (P), (Q) (R), (S) आणि (T) ही पाच वाक्ये योग्य अनुक्रमाने पुनर्रचना करा; त्यांनतर खालील प्रश्नांची उत्तर द्या.

P. पशूपेक्षा लहान प्राणी बरा असे म्हणत, शिकारी कुत्र्याची ही धावपळ पाहून शेळीचा कळप त्याचा उपहास करतो.
Q. एके दिवशी, एक मोठा आणि शक्तिशाली शिकारी कुत्रा एका सशाच्या मागे धावत होता.
R. लांबवर पळाल्यानंतर कंटाळून शिकारी कुत्रा शिकार शोधून देतो.
S. आमच्यातला तो फरक आहे."
T. त्याला शिकारी कुत्रा उत्तर देतो : ससा आपल्या जीवासाठी धावत होता आणि मी फक्त खाण्यासाठी धावत होतो.

पुनर्रचना केल्यानंतर खालीलपैकी कोणते वाक्य तिसरे असेल?

DIRECTION: Rearrange the following five sentences (P), (Q), (R), (S) and (T) in the proper sequence to form a meaningful paragraph; then answer the questions given below them.
P. A herd of goats watching this mocks the hound, saying that the little one is better than the beast.
Q. One day, a strong and powerful hound was chasing a hare.
R. After running for a long time, the tired hound gives up the hunt.
S. That is the difference between us.”
T. To this, the hound responds: “The rabbit was running for its life, I was only running for dinner.

Which of the following should be the THIRD sentence after rearrangement?

ہدایات: ان پانچ جملوں (P)، (Q)، (R)، (S) اور (T) کو با معنی پیرا بنانے کے لئے دوبارہ ترتیب دیجئے، پھر نیچے دے گئے سوالوں کے جواب دیجئے

P. بکریوں کے کافلا ہلکار کی نکل کرنے لگے ، یہ کہکر کہ ایک چھوٹا والا بیرحم جانور سے اچھا ہے.
Q. ایک دن ، ایک مضبوط اور طاقتور ہلکار خرگوش کہ پیچھا کر رہا تھا.
R. زیادہ دیر تک دھووڈ نے کے بعد، تھکے ہلکار نے شکار چھوڑ دیا.
S. وہی ہم دونو کے درمیان فرق ہے.
T. اسس پر، ہلکار نے جواب دیا: "خرگوش اپنی جان کے لئے بھاگ رہا ہے، میں خالی اپنے کھانے کے لئے بھاگ رہا ہوں.

دوبارہ ترییب دینے کے بعد کون سا جملہ تیسرا ہونا چاہیے؟

A.P
A.P
A.P

B.Q
B.Q
B.Q

C.R
C.R
C.R

D.S
D.S
D.S

Answer: A.P
A.P
A.P

67 **सूचना:** खालील प्रश्नात एक आकृतिबंध दाखविला आहे आणि तो कळीची आकृती म्हणून नोंदला आहे. कागदाच्या मागच्या बाजूने बघितल्यास मूळची कळीची आकृती अचूकपणे कशी दिसेल हे तुम्हाला ठरवायचे आहे.

DIRECTIONS: In the following question, a design is given, marked as key figure. You have to determine which e will be the exact view of the original key figure seen from the reverse side of the paper.

نیچے کے سوال میں نقش دیا گیا ہے، جس پر اہم شکل کا نشان لگا ہے آپ کو یہ طے کرنا ہے کہ اہم شکل کا قطعی منظر کاغذ کی الٹی طرف سے کونسا ہوگا؟

मुख्य आकृती
Main Figure
اصل شکل



उत्तरासाठी पर्यायी आकृत्या
Answer Figure
جوابی شکل

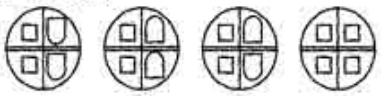

A. (A)

B. (B)

C. (C)

D. (D)

Answer: C. (C)

68 ‘हरकत’ या शब्दाचा समानार्थी शब्द कोणता ?

A.मोकळीक

B.अडथळा

C.मान्यता

D.अविरोध

Answer: B.अडथळा

69	निरंतर प्रक्रिया ची व्याख्या खालील प्रमाणे आहे The term continuous process is interpreted as— مسلسل عمل کی اصطلاح کی تشریح اس طور پر کی جاتی ہے-
	A.प्रक्रिया सतत आणि सर्वत्र चालू आहे A.The process going on everywhere, all the time A.یہ عمل ہر جگہ، ہر وقت چل رہا ہے
	B.जीवनभर चालणारी प्रक्रिया B.Life-long process B.زندگی بھر کا عمل
	C.जन्म पासून मारे पर्यंतची प्रक्रिया C.The process going on from cradle to grave C.گود سے قبر تک کا عمل
	D.घरी, सर्व ठिकाणी आणि प्रत्येक वेळी चालू असणारी प्रक्रिया D.The process going on at home, all places and every time D.یہ عمل گھر، ہر جگہ اور ہر وقت چل رہا ہے
Answer:	D.घरी, सर्व ठिकाणी आणि प्रत्येक वेळी चालू असणारी प्रक्रिया D.The process going on at home, all places and every time D.یہ عمل گھر، ہر جگہ اور ہر وقت چل رہا ہے

70 सूचना : खालील प्रत्येक प्रश्नात दोन विधाने I आणि II दिलेले आहेत. हे विधान एकतर स्वतंत्र कारण असू शकतात किंवा स्वतंत्र कारणांचे परिणाम असू शकतात. यांपैकी एक विधान इतर विधानाचा परिणाम असू शकतो. दोन्ही विधाने वाचा आणि खालीलपैकी कोणत्या उत्तराचा पर्याय या दोन्ही विधानांमधील संबंधांचे वर्णन करतो ते ठरवा.

विधान :
I. आंतरराष्ट्रीय बाजारपेठेत कच्च्या तेलाच्या किंमतीत वाढ झाल्याने अलिकडे एका आठवड्यापूर्वी जाहीर केलेल्या या किमतीत पेट्रोलियम उत्पादनांचे भाव मोठ्या प्रमाणात वाढले आहेत.
II. तेल उत्पादक देशांनी मागील एक महिन्यापासून कच्च्या तेलाचे उत्पादन १० टक्क्यांनी वाढवले आहे.

DIRECTIONS: Below in each question are given two statements I and II. These statements may be either independent causes or may be effects of independent causes. One of these statements may be the effect of the other statement. Read both the statements and decide which of the following answer choice correctly depicts the relationship between these two statements.

Statements:
I. The prices of all the petroleum products have increased substantially in the recent price hike announced a week ago due to increase in price of crude oil in the international market.
II. Oil producing countries have increased the output of crude oil by 10 percent for the last one month.

ہدایات: نیچے ہر سوال میں دو بیانات I اور II آزاد وجوہات یا پھر آزاد وجوہات کے اثرات ہو سکتے ہیں۔ انہیں گئے ہیں۔ یہ بیانات یا تو بیانات میں سے ایک بیان دوسرے کا اثر ہو سکتا ہے۔دونوں بیانات پڑھیں اور فیصلہ کریں کہ نیچے دیے گئے کس جواب کا انتخاب ان دونوں بیانات کے در میان تعلق کو ٹھیک سے ظاہر کرتا ہے۔

بیانات:
I – انٹرنیشنل مارکیٹ میں خام تیل کی قیمت میں حالیہ اضافے کی وجہ سے ایک ہفتہ قبل قیمتوں میں اضافے کے اعلان کے بعد تمام پٹرولیم مصنوعات کی قیمتوں میں خاطر خواہ اضافہ ہوا ہے۔
II - پچھلے ایک ماہ کے دوران تیل پیدا کرنے والے ممالک نے خام تیل کی پیداوار میں 10 فیصد اضافہ کیا ہے۔

A.विधान I कारण आहे आणि विधान II त्याचा परिणाम आहे;
A.Statement I is the cause and statement II is its effect;
A. بیان نمبر I وجہ ہے اور بیان نمبر II اس کا اثر ہے۔

B.विधान II कारण आहे आणि विधान I त्याचा परिणाम आहे;
B.Statement II is the cause and statement I is its effect;
B. بیان نمبر II وجہ ہے اور بیان نمبر I اس کا اثر ہے۔

C.विधान I आणि II दोन्ही स्वतंत्र कारणे आहेत;
C.Both the statements I and II are independent causes;
C. دونوں بیانات نمبر I اور نمبر II آزاد وجوہات ہیں۔

D.विधान I आणि II दोन्ही काही सामान्य कारणांचे परिणाम आहेत
D.Both the statements I and II are effects of some common cause.
D. دونوں بیانات نمبر I اور نمبر II کسی ایک وجہ کے اثرات ہیں۔

Answer: D.विधान I आणि II दोन्ही काही सामान्य कारणांचे परिणाम आहेत
D.Both the statements I and II are effects of some common cause.
D. دونوں بیانات نمبر I اور نمبر II کسی ایک وجہ کے اثرات ہیں۔

71 13 फेब्रुवारी 2011 ते 30 मार्च 2011 मधील एकूण दिवसांची संख्या काय आहे?

Find the number of days from 13 Feb 2011 to 30 March 2011?

13؟فروری 2011 سے 30 مارچ 2011 تک دنوں کی تعداد معلوم کریں

A.50 दिवस
A.50 Days
A.50دن

B.46 दिवस
B.46 Days
B.46دن

C.60 दिवस
C.60 Days
C.60دن

D.58 दिवस
D.58 Days
D.58دن

Answer: B.46 दिवस
B.46 Days
B.46دن

72 मानकांच्या बाबतीत शिक्षकांची जबाबदारी आहे

The teacher’s responsibility with regard to standards is to—

-معیار کے سلسلے میں استاد کی ذمہ داری ہے

A.सदस्यांसाठी वर्गात मानके राबवणे
A.Set up standards for the members the class
A.ارکان کو کلاس کے معیار کے مطابق مقرر کریں

B.मुलांना स्वत: चा वैयक्तिक आणि सामूहिकपणे मानदंड निश्चित करण्यासाठी मदत करणे
B.Help children to set standards for themselves individually and collectively
B.اپنے بچوں کو انفرادی طور پر اور مجموعی طور پر معیار مقرر کرنے میں مدد کریں

C.प्रत्येक मुलासाठी शाळेने निर्धारित केलेले मानक लागू करणे
C.Enforce for each child the standards set by the school
C.ہر بچے کے لئے اسکول کی طرف سے مقرر کردہ معیار کا نفاذ

D.मानकांशिवाय प्रभावी सूचना आणि शिकवण्याचा एक प्रोग्रामर सेट करणे
D.Set a programmer of effective instruction and learning without regard to standards
D.معیار کے بغیر مؤثر ہدایات اور سیکھنے کے پروگرام مقرر کریں

Answer: B.मुलांना स्वत: चा वैयक्तिक आणि सामूहिकपणे मानदंड निश्चित करण्यासाठी मदत करणे
B.Help children to set standards for themselves individually and collectively
B.اپنے بچوں کو انفرادی طور پر اور مجموعی طور پر معیار مقرر کرنے میں مدد کریں

73 Out of the given four words only one is not spelt correctly. Find the word that is not correctly spelt.

A.Commitee

B.Scenery

C.Secretary

D.Sergeant

Answer: A.Commitee

74 856 × 789 × 1053 च्या एकक स्थानचा अंक

Unit digit of 856 × 789 × 1053 is

856 × 789 × 1053 کا یونٹ ہندسہ ہے؟

A.1
A.1
A.1

B.2
B.2
B.2

C.3
C.3
C.3

D.4
D.4
D.4

Answer: B.2
B.2
B.2

75

सूचना: दिलेल्या पर्यायांमधून श्रेणी पूर्ण करणारी योग्य आकृती निवडा.

DIRECTIONS: Complete the series by choosing right figure from the given choices.

ہدایات: دیئے گئے اختیارات میں سے صحیح شکل کو چن کر سلسلہ کو مکمل کیجیئے

Problem Figures

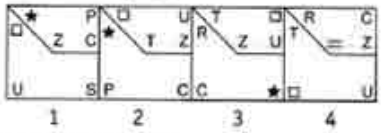

1 2 3 4

Answer Figures

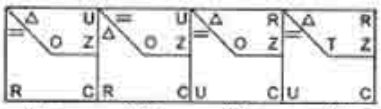

(A) (B) (C) (D)

A. (A)

B. (B)

C. (C)

D. (D)

Answer: A. (A)

76

अध्ययन अकार्यक्षमतेचे उदाहरण आहे

An example of learning disability is

سیکھنے کی معذوری کی ایک مثال ہے

A.सेरेब्रल पाल्सी
A.Cerebral palsy
A.دماغی فالج

B.एएसडी
B.ASD
B.اے ایس ڈی

C.डिस्लेक्सिया (वाचन अक्षमता)
C.Dyslexia
C.پڑھنے کی اہلیت میں کمی

D.एडीएचडी
D.ADHD
D.اے ڈی ایچ ڈی

Answer: C.डिस्लेक्सिया (वाचन अक्षमता)
C.Dyslexia
C.پڑھنے کی اہلیت میں کمی

77 **सूचना:** दिलेल्या पर्यायांमधून श्रेणी पूर्ण करणारी योग्य आकृती निवडा.

DIRECTIONS: Complete the series by choosing right figure from the given choices.

ہدایات: دیئے گئے اختیارات میں صحیح شکل کا انتخاب کر کے سیریز کو مکمل کیجیئے۔

Problem Figures

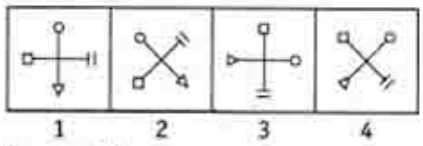

Answer Figures

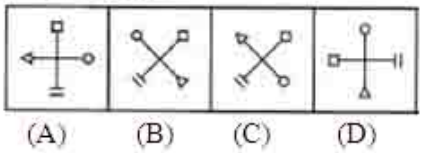

A. (A)

B. (B)

C. (C)

D. (D)

Answer: C. (C)

78 Out of the given options which best expresses the meaning of the given Proverb?
The early bird catches the worm.

A.The birds that fly in the morning are a delight to watch

B.You should wake up and start working early if you want to succeed

C.A few rare birds catch worms and insects to eat

D.One should never get up early in the morning

Answer: B.You should wake up and start working early if you want to succeed

79 निर्देश: दिलेल्या अंक मालिकेतील चुकीची संज्ञा शोधा:

4, 5, 9, 20, 34, 59, 95

DIRECTIONS: Find the wrong term in the given number series:

4, 5, 9, 20, 34, 59, 95

ہدایت دے گئے نمبرس سرج مے غلط نمبر کھوجے

4, 5, 9, 20, 34, 59, 95

A.9
A.9
A.9

B.34
B.34
B.34

C.59
C.59
C.59

D.20
D.20
D.20

Answer: D.20
D.20
D.20

80 $y^2+7y+12=0$ या वर्गसमीकरणाची मुळे आहेत:

The roots of the quadratic equation $y^2+7y+12=0$ are:

$y^2+7y+12=0$ مربع مساوات کے روٹ ہیں:

A.4, 3
A.4, 3
A.4, 3

B.-4, -3
B.-4, -3
B.-4, -3

C.4, -3
C.4, -3
C.4, -3

D.8, 3
D.8, 3
D.8, 3

Answer: B.-4, -3
B.-4, -3
B.-4, -3

81 कॅटाटॉनिक स्टूपर आणि कॅटाऑयनिक रिगार्डिती हे याचे प्रकार आहेत

Catatonic stupor & Cataionic regrdity are types of

کنٹونک سٹپور اور کیٹونیئن ریگدیتا کی قسمیں ہیں

A.मनोकारक लक्षण
A.Psychomotor symptoms
A. نفسیاتیٹر علامات

B.दु: स्वप्न
B.Hallucinations
B.حدود

C.व्यवहार संबंधी विकार
C.Behavioral disorders
C.طرز عمل کی خرابی

D.दृश्य विकार
D.Visual disorders
D.بصری خرابی

Answer: A.मनोकारक लक्षण
A.Psychomotor symptoms
A. نفسیاتیٹر علامات

82

सूचना: खालील प्रश्नात एक उघडलेला फासा दाखविला आहे. उत्तराच्या पर्यायांपैकी कोणता पर्याय ● या चिन्हाच्या विरुद्ध बाजूला येईल?

DIRECTIONS: In the following question an unfolded dice is given. From the given alternatives which of the following will be opposite of ● ?

ہدایات: نیچے کے سوال میں ایک بغیر فولڈ کیا ہوا پاسہ دیا گیا ہے، دیئے گئے متبادلات میں سے کونسی نیچے والی شکل اپوزٹ ہوگی

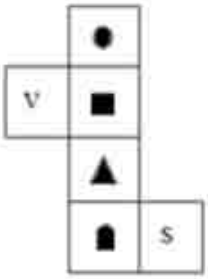

(A) ■

(B) ▲

(C) V

(D) ●

Answer: (A) ■

83 DIRECTIONS: A sentence with an underlined phrasal verb is given below. Out of the four options, choose the one which can be substituted for the given phrasal Verb.
A gust of air blew out the candle.

A.extinguished

B.ignited

C.lighted

D.kept

Answer: A.extinguished

84 एका विशिष्ट सांकेतिक भाषेमध्ये, जर CERTIFY हा शब्द BURGIVX असा कूटबध्द केला जात असेल, ADJACENT हा शब्द त्या भाषेत कसा कूटबध्द केला जाईल?

In a certain code language, if the word CERTIFY is coded as BURGIVX, then how is the word ADJACENT coded in that language?

ایک مخصوص ضابطے کی زبان میں، اگر لفظ CERTIFY کو BURGIVX لکھا جاتا ہے، تو اس زبان میں لفظ ADJACENT کو کیسے لکھاجائیگا؟

A.ZWQZXVMG
A.ZWQZXVMG
A.ZWQZXVMG

B.GMVXZQWZ
B.GMVXZQWZ
B.GMVXZQWZ

C.RMVWYJWH
C.RMVWYJWH
C.RMVWYJWH

D.GMXVWRVZ
D.GMXVWRVZ
D.GMXVWRVZ

Answer: B.GMVXZQWZ
B.GMVXZQWZ
B.GMVXZQWZ

85 सूचना: हे प्रश्न खालील माहितीवर आधारित आहेत.
सहा मुले - A, B, C, D, E आणि F हे रांग -I मध्ये उत्तर दिशेकडे बघत बसलेले आहेत आणि सहा मुली P, Q, R, S, T आणि U रांग -II मध्ये दक्षिण दिशेकडे बघत बसलेल्या आहेत. रांग -I मधील प्रत्येक व्यक्ती रांग -II मधल्या एक व्यक्तीच्या अगदी समोर बसली आहे.
T हा D च्या विरुद्ध बसलेला आहे, जो कुठल्याही अंतिम टोकावर बसलेला नाही. P हि T च्या तात्काळ डावीकडे आहे. E हि कोणत्याही टोकाला बसलेली नाही तसेच D च्या बाजूला हि बसलेली नाही. U हि C च्या समोर बसलेली आहे, जो F च्या डावीकडून दुसरा आहे. बरोबर तीन व्यक्ती P आणि U च्या मध्ये बसलेले आहेत. Q किंवा R हे दोन्हीही U चे शेजारी नाहीत. S हि Q च्या समीप बसलेली नाही. B हा A च्या उजवीकडे आहे.
Sच्या संदर्भात Pची स्थिती काय असेल?

DIRECTIONS: These questions are based on the following information.
Six boys - A, B, C, D, E, and F are sitting in row-I facing to the North and six girls P, Q, R, S, T and U – are sitting in row - II facing to the South. Each person from row-I is facing exactly one person in row-II. T is sitting opposite D, who is not sitting at any of the extreme end. P is to the immediate left of T. E is neither sitting at any extreme end nor adjacent to D. U is sitting opposite C, who is second to the left of F. Exactly three persons are sitting between P and U. Neither Q nor R are neighbours of U. S is not sitting adjacent to Q. B is to the right of A.
What is P's position with respect to 'S'?

ہدایات: یہ سوالات مندرجہ ذیل معلومات پر مبنی ہیں۔
چھ لڑکے - A، B، C، D، E اور F – قطار I- میں شمال کا رخ کیے ہوئے بیٹھے ہیں اور چھ لڑکیاں P، Q، R، S، T اور U – قطار II- میں ایک شخص کے ٹھیک سامنے بیٹھا ہے۔ II-میں ہر شخص قطار I-میں جنوب کا رخ کیے ہوئے بیٹھی ہیں۔ قطار
نہ تو کسی انتہائی سرے پر E کے فوری بائیں طرف ہے۔ P، T کے بالمقابل بیٹھی ہے، جو کسی بھی انتہائی سرے پر نہیں بیٹھا ہے۔ T، D کے درمیان ٹھیک تین U اور P کے بائیں طرف سے دوسرا ہے۔ F کے بالمقابل بیٹھی ہے، جو U، C کے بغل میں بیٹھا ہے۔ D اور نہ ہی کے دائیں طرف ہے۔ B، A کے بغل میں نہیں بیٹھی ہے۔ S، Q کے پڑوسی ہیں۔ R، U نہ ہی Q لوگ بیٹھے ہیں۔ نہ تو
'S' کے تعلق سے P کی پوزیشن کیا ہے؟

A.शेजारी
A.Neighbour
A.پڑوسی

B.उजवीकडून दुसरा
B.Second to the right
B.دائیں سے دوسری

C.उजवीकडून तिसरा
C.Third to the right
C.دائیں سے تیسری

D.यांपैकी कोणतीही नाही
D.None of these
D.ان میں سے کوئی نہیں

Answer: D.यांपैकी कोणतीही नाही
D.None of these
D.ان میں سے کوئی نہیں

86 विरलीकृत वाईनमध्ये फक्त 8 लिटर वाईन आहे आणि उर्वरित पाणी आहे. 30% केंद्रीकरण असलेले नवीन मिश्रण वाईन टाकून तयार केले जावे. सुरूवातीला मिश्रणामध्ये 32 लिटर्स पाणी असल्यास किती लिटर्स मिश्रणाच्या जागी शुध्द वाईन मिसळली जावे?

The diluted wine contains only 8 liters of wine and the rest is water. A new mixture whose concentration is 30%, is to be formed by replacing wine. How many liters of mixture shall be repalced with pure wine if there was initially 32 liters of water in the mixture?

پتلی شراب میں صرف 8 لیٹر شراب ہے اور باقی پانی ہے۔ ایک نیا مرکب جس یہ مقدار 30%ہے، شراب کوتبدیل کر کے بنایا جاتا ہے۔ اگر مرکب میں ابتدائی طور پر 32 لیٹر پانی موجود ہو تو کتنی لیٹر کے مرکب کو خالص شراب کے ساتھ تبدیل کیا جائے گا؟

A.4
A.4
A.4

B.5
B.5
B.5

C.8
C.8
C.8

D.यांपैकी कोणतेही नाही
D.None of these
D.ان میں سے کوئی نہیں

Answer: B.5
B.5
B.5

87 जर आंब्याला द्राक्षे म्हटले, द्राक्षांना सफरचंद म्हटले, सफरचंदाला केळे म्हटले, केळ्याला संत्रे म्हटले, आणि संत्र्याला कलिंगड म्हटले. तर खालीलपैकी कोणते फळ लाल रंगाचे असते?

If mango is called grapes, grapes is called apple, apple is called banana, banana is called orange and orange is called water melon. Which of the following fruit is red in colour?

اگر آم کو انگور، انگور کو سیب، سیب کو کیلا، کیلے کو نارنگی اور نارنگی کو تربوز کہا جائے تو مندرجہ ذیل کونسا پھل سرخ رنگ میں ہے؟

A.कलिंगड
A.Water-melon
A.تربوز

B.सफरचंद
B.Apple
B.سیب

C.केळे
C.Banana
C.کیلا

D.संत्रे
D.Orange
D.نارنگی

Answer: C.केळे
C.Banana
C.کیلا

88 खालील पैकी कोणता नैसर्गिक चुंबक आहे?

Which of the following is a natural magnet?

مندرجہ ذیل میں سے کون ایک قدرتی مقناطیس ہے؟

A.लोडस्टोन
A. Lodestone
A.لوڈاسٹون

B.कॉपर
B. Copper
B.تانبا

C.सोडीयम
C. Sodium
C.سوڈیم

D.पोट्याशियम
D. Potassium
D.پوٹیشیم

Answer: A.लोडस्टोन
A. Lodestone
A.لوڈاسٹون

89 खालीलपैकी कोणते अरण्य जलरंजीत क्षेत्रामध्ये विकसीत झालेले आहे?

Which of the following forest is grown in waterlogged areas?

مندرجہ ذیل جنگل میں سے کون پانی سے بھرے علاقوں میں بڑھتےہیں؟

A.सदाहरीत अरण्य
A.Evergreen Forest
A.سدا بہار جنگلات

B.पाणझडी अरण्य
B.Deciduous Forest
B.ڈسیڈس Deciduous جنگل

C.ट्रापीकल थॉर्न अरण्य
C.Tropical thorn Forest
C.ٹرہپیکل تھارن Tropical thorn جنگل

D.मॅनग्रोव्ह
D.Mangrove
D.مینگرو mangrove جنگل

Answer: D.मॅनग्रोव्ह
D.Mangrove
D.مینگرو mangrove جنگل

90 दिलेल्या आकृत्यां मधील गहाळ संख्या शोधा:
Find the missing number in the given figures:
: نیچے کے رجحاؤں مے گمنام نمبر کھوجے

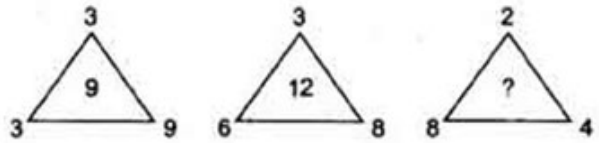

A. 8

B. 4

C. 2

D. 6

Answer: A. 8

For More Info And Videos About TAIT-Exam Syllabus And Other Exam Visit My Channel
TAIT च्या 30 प्रश्नपत्रिका PDF
BADSHAHimp Available Request 9765226781
YouTube WWW.YouTube.com/BADSHAHimp
Subscribe My Channel

91 सूचना: हे प्रश्न खालील माहितीवर आधारित आहेत.
सहा मुले - A, B, C, D, E आणि F हे रांग -I मध्ये उत्तर दिशेकडे बघत बसलेले आहेत आणि सहा मुली P, Q, R, S, T आणि U रांग -II मध्ये दक्षिण दिशेकडे बघत बसलेल्या आहेत. रांग -I मधील प्रत्येक व्यक्ती रांग -II मधल्या एक व्यक्तीच्या अगदी समोर बसली आहे.
T हा D च्या विरुद्ध बसलेला आहे, जो कुठल्याही अंतिम टोकावर बसलेला नाही. P हि T च्या तात्काळ डावीकडे आहे. E हि कोणत्याही टोकाला बसलेली नाही तसेच D च्या बाजूला हि बसलेली नाही. U हि C च्या समोर बसलेली आहे, जो F च्या डावीकडून दुसरा आहे. बरोबर तीन व्यक्ती P आणि U च्या मध्ये बसलेले आहेत. Q किंवा R हे दोन्हीही U चे शेजारी नाहीत. S हि Q च्या समीप बसलेली नाही. B हा A च्या उजवीकडे आहे.
'S' समोर कोण बसलेला आहे?

DIRECTIONS: These questions are based on the following information.
Six boys - A, B, C, D, E, and F are sitting in row-I facing to the North and six girls P, Q, R, S, T and U – are sitting in row - II facing to the South. Each person from row-I is facing exactly one person in row-II.
T is sitting opposite D, who is not sitting at any of the extreme end. P is to the immediate left of T. E is neither sitting at any extreme end nor adjacent to D. U is sitting opposite C, who is second to the left of F. Exactly three persons are sitting between P and U. Neither Q nor R are neighbours of U. S is not sitting adjacent to Q. B is to the right of A.
Who is sitting opposite 'S'?

ہدایات: یہ سوالات مندرجہ ذیل معلومات پر مبنی ہیں۔
چھ لڑکے - A، B، C، D، E اور F – قطار I میں شمال کا رخ کیے ہوئے بیٹھے ہیں اور چھ لڑکیاں P، Q، R، S، T اور U – قطار II میں ایک شخص کے ٹھیک سامنے بیٹھا ہے۔ II میں ہر شخص قطار I میں جنوب کا رخ کیے ہوئے بیٹھی ہیں۔ قطار کے درمیان ٹھیک تین U اور P کے بائیں طرف سے دوسرا ہے۔ F کے بالمقابل بیٹھی ہے، جو C، U کے بغل میں بیٹھا ہے۔ D اور نہ ہی T، D کے بالمقابل بیٹھی ہے، جو کسی بھی انتہائی سرے پر نہیں بیٹھا ہے۔ P، T کے فوری بائیں طرف ہے۔ E نہ تو کسی انتہائی سرے پر کے دائیں طرف ہے۔ A، B کے بغل میں نہیں بیٹھی ہے۔ Q، S کے پڑوسی ہیں۔ U، R نہ ہی Q لوگ بیٹھے ہیں۔ نہ تو
'S' کے بالمقابل کون بیٹھا ہے؟

A.A
A.A
A.A

B.F
B.F
B.F

C.E
C.E
C.E

D.निर्धारित केले जाऊ शकत नाही.
D.Cannot be determined
D.تعین نہیں کیا جا سکتا ہے

Answer: C.E
C.E
C.E

For More Info And Videos About TAIT-Exam Syllabus And Other Exam Visit My Channel
TAIT च्या 30 प्रश्नपत्रिका PDF
BADSHAHimp Available Request 9765226781
WWW.YouTube.com/BADSHAHimp
Subscribe My Channel

92 राम A बिंदूपासून सुरुवात करुन उत्तरेला 6 किमी चालत जातो, मग डावीकडे वळतो आणि 8 किमी चालतो. मग तो डावीकडे वळतो आणि 12 किमी चालून (d) बिंदूपर्यंत जातो. तर रामचे तोंड कुठल्या दिशेला आहे?

Ram start form a point A and walks 6 km North, then turns left and walks 8 km. Then he turns left and walks 12 km. In which direction is Ram facing now?

(a) رام ایک نقطہ A سے شروع کرتا ہے اور 6 کلومیٹر شمال میں چلتا ہے، پھر بائیں مڑتا ہے اور 8 کلومیٹر چلتا ہے۔ پھر وہ تک 12 کلومیٹر چلتا ہے۔ رام کا رخ کس سمت میں ہے؟ (d) بائیں مڑتا ہے اور نقطہ

A.उत्तर
A.North
A.شمال

B.दक्षिण
B.South
B.جنوب

C.पूर्व
C.East
C.مشرق

D.पश्चिम
D.West
D.مغرب

Answer: B.दक्षिण
B.South
B.جنوب

93 भारताची घटना तयार करण्यासाठी असलेली विधानसभा यांच्या नेतृत्वाखाली झाली होती:

The Constituent Assembly body set up to frame the Constitution of India was headed by:

بھارت کا آئین تیار کرنے کے لئے دستور ساز اسمبلی کے کمیٹی کسکی سربراہی میں قائم کی گئی تھی۔

A.डॉ. बी आर अंबेडकर
A.Dr. BR Ambedkar
A. ڈاکٹر بی آر امبیڈکر

B.जे. नेहरू
B.J. Nehru
B. جواہر لال نہرو

C.महात्मा गांधी
C.Mahatma Gandhi
C. مہاتما گاندھی

D.डॉ. राजेंद्र प्रसाद
D.Dr. Rajendra Prasad
D. ڈاکٹر راجندر پرساد

Answer: D.डॉ. राजेंद्र प्रसाद
D.Dr. Rajendra Prasad
D. ڈاکٹر راجندر پرساد

94 सूचना : खालील प्रत्येक प्रश्नात दोन विधाने I आणि II दिलेले आहेत. हे विधान एकतर स्वतंत्र कारण असू शकतात किंवा स्वतंत्र कारणांचे परिणाम असू शकतात. यांपैकी एक विधान इतर विधानाचा परिणाम असू शकतो. दोन्ही विधाने वाचा आणि खालीलपैकी कोणत्या उत्तराचा पर्याय या दोन्ही विधानांमधील संबंधांचे वर्णन करतो ते ठरवा.

विधान :
I. X ला मिळणाऱ्या ग्रेडमध्ये सतत घसरण होत आहे.
II. Y ला मिळणाऱ्या ग्रेडमध्ये सतत घसरण होत आहे.

DIRECTIONS: Below in each question are given two statements I and II. These statements may be either independent causes or may be effects of independent causes. One of these statements may be the effect of the other statement. Read both the statements and decide which of the following answer choice correctly depicts the relationship between these two statements.

Statements:
I. Grades received by X have been steadily dropping.
II. Grades received by Y have been steadily dropping.

ہدایات: نیچے ہر سوال میں دو بیانات I اور II آ تو یہ بیانات یا تو آزاد وجوہات کے اثرات ہو سکتے ہیں۔ انہیں گئے ہیں۔ دونوں بیانات پڑھیں اور فیصلہ کریں کہ نیچے دیے گئے کس جواب کا انتخاب ان بیانات میں سے ایک بیان دوسرے کا اثر ہو سکتا ہے۔ دونوں بیانات کے درمیان تعلق کو ٹھیک سے ظاہر کرتا ہے۔

بیانات:
I –X کو ملنے والے گریڈز مسلسل گر رہے ہیں۔
II - Y کوملنے والے گریڈز مسلسل گر رہے ہیں۔

A.विधान I कारण आहे आणि विधान II त्याचा परिणाम आहे;
A.Statement I is the cause and statement II is its effect;
A. بیان نمبر I وجہ ہے اور بیان نمبر II اس کا اثر ہے۔

B.विधान II कारण आहे आणि विधान I त्याचा परिणाम आहे
B.Statement II is the cause and statement I is its effect;
B.بیان نمبر II وجہ ہے اور بیان نمبر I اس کا اثر ہے۔

C.विधान I आणि II दोन्ही स्वतंत्र कारणे आहेत;
C.Both the statements I and II are independent causes;
C.دونوں بیانات نمبر I اور نمبر II آزاد وجوہات ہیں۔

D.विधान I आणि II दोन्ही स्वतंत्र कारणांचे परिणाम आहेत;
D.Both the statements I and II are effects of independent causes;
D.دونوں بیانات نمبر I اور نمبر II آزاد وجوہات کے اثرات ہیں۔

Answer: D.विधान I आणि II दोन्ही स्वतंत्र कारणांचे परिणाम आहेत;
D.Both the statements I and II are effects of independent causes;
D.دونوں بیانات نمبر I اور نمبر II آزاد وجوہات کے اثرات ہیں۔

95

सूचना: खालील प्रश्नात एकाच फाशाच्या चार अवस्था दाखविल्या आहेत. प्रश्नात विचारलेल्या चिन्हाच्या विरुद्ध बाजूला कोणते चिन्ह असेल?

DIRECTIONS: In the following questions four positions of the same dice are shown. Select the symbol opposite to the symbol as asked in the question.

ہدایات: نیچے کے سوالوں میں، ایک ہی پاسہ کی چار حالتیں دکھائی گئی ہیں اس علامت کو چنئے جو سوال میں پوچھی گئی علامت کے سامنے ہے۔

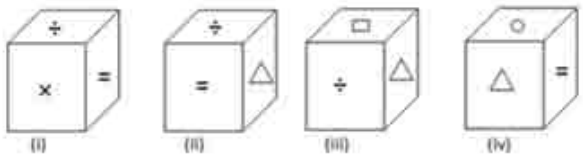

× या चिन्हाच्या विरुद्ध बाजूला कोणते चिन्ह असेल?
Which symbol will be opposite to symbol × ?
کونسا نشان × نشان کی ضد ہوگی؟

A. o

B. =

C. ×

D. Δ

Answer: D. Δ

96

मुलांच्या समाजीकरण प्रक्रियेचा थेट परिणाम म्हणजे

The direct proportion of the child's socialization process is—

.بچے کی سماجیات کے عمل کا براہ راست تناسب ہے-

A.सामाजिक विकास
A.Social development
A.سماجی ترقی

B.मानसिक विकास
B.Mental development
B.دماغی ترقی

C.मोटार विकास
C.Motor development
C.موٹر ترقی

D.वरील सर्व
D.All the above
D.مذکورہ تمام

Answer: A.सामाजिक विकास
A.Social development
A.سماجی ترقی

97 विजेच्या चुंबकिय प्रभावाचा शोध यांनी लावला:

Magnetic effect of current was discovered by:

کرنٹ کا میگنیٹک اثر _____ کے ذریعہ دریافت ہوا۔

A.फ्लेमिंग
A. Fleming
A.فلیمنگ

B.ऑरस्टेड
B. Oersted
B.اورسٹیڈ

C.मॅक्सवेल
C. Maxwell
C.میکس ویل

D.न्यूटन
D. Newton
D.نیوٹن

Answer: B.ऑरस्टेड
B. Oersted
B.اورسٹیڈ

98 खालीलपैकी पुल्लिंगी शब्द ओळखा.

A.श्रीगणेशा

	B.श्रीफळ
	C.श्रीमंती
	D.श्रीमुख
Answer:	A.श्रीगणेशा

99	खालीलपैकी कोणते ऊर्जेचे स्त्रोत नाही? Which of the following is not a source of energy? مندرجہ ذیل میں سے کون توانائی کا ایک ذریعہ نہیں ہے؟
	A.हवा A. Wind A.ہوا
	B.सुर्य B. Sun B.دھوپ
	C.रसायन C. Chemical C.کیمیکل
	D.पेन्सिल D. Pencil D.پنسل
Answer:	D.पेन्सिल D. Pencil D.پنسل

100	A sentence with an underlined idiomatic expression is given. What is the meaning of the idiomatic expression ‘pay through the nose’ in the sentence given below? If you drive into the city, you have to <u>pay through the nose</u> for parking.
	A.To pay too much money for something
	B.To get a free service
	C.To get something at a very cheaper rate
	D.None of the above

Answer: A.To pay too much money for something

101 निर्देश: खालील मालिकेतील गहाळ संख्या शोधा.
77, 82, 87, 92, 97, ..., 107

DIRECTION: Find the missing number in the following series.

77, 82, 87, 92, 97, ..., 107

ہدایات: جیل کے سرج مے گمشدہ نمبر کھوجے.
77, 82, 87, 92, 97, ..., 107

A.103
A.103
A.103

B.108
B.108
B.108

C.102
C.102
C.102

D.106
D.106
D.106

Answer: C.102
C.102
C.102

102 **सूचना:** खालील प्रश्नात उत्तरातील पर्यायांपैकी कोणत्या पर्यायी आकृतीत प्रश्नातील आकृती अंतर्भूत आहे?

DIRECTIONS: In the given question find the answer figure in which question figure is embedded.

ہدایات: دیئے گئے سوال میں، جواب کی شکل کو دریافت کیجیئے جو سوال میں سرایت کر گئی ہے.

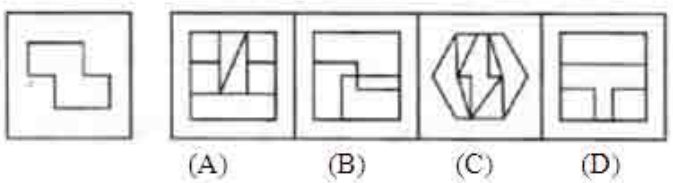

A. (A)

B. (B)

C. (C)

D. (D)

Answer: A. (A)

103 सूचना: खालील प्रश्नांमध्ये दिलेल्या पर्यायांमधून संबंधित अक्षर/शब्द/संख्या निवडा.

अक्षरे : शब्द:: आकडे:?

DIRECTIONS: In the following question, select the related letter/word/number from the given alternatives.

Letters : Word:: Digits:?

سمت: مندرجہ ذیل سوال میں، دیے گئے متبادل سے متعلقہ حرف/لفظ/نمبر منتخب کریں۔

خطوط : لفظ:: اعداد:؟

A.मोजणे
A.Count
A.شمار کرنا

B.संख्यात्मक
B.Numeric
B.عددی

C.संख्या
C.Number
C.نمبر

D.मुळाक्षर
D.Alphabet
D.حروف تہجی

Answer: C.संख्या
C.Number
C.نمبر

104 प्रश्नासाठी सूचना: खालील मालिका पूर्ण करा.

GT, JU, MV, _____

DIRECTION: Complete the following series.

GT, JU, MV, _____

سوال کے لیے ہدایت:مندرجہ ذیل سیریز کو مکمل کریں۔

GT, JU, MV, _____

A.IV
A.IV
A.IV

B.PW
B.PW
B.PW

C.DV
C.DV
C.DV

D.VV
D.VV
D.VV

Answer: B.PW
B.PW
B.PW

105 मीना पेक्षा शिवा उंच आहे, पण देवा आणि मीना पेक्षा लहान असून मणी इतकाच उंच आहे. परंतु, सुधा पेक्षा उंच आहे, तर मणी -

If Shiva is taller than Meena, but shorter than Deva and Meena is the same height as Mani, but taller than Sudha, then Mani –

- اگر شیوا مینا سے لمبھی ہے، مگر دیوا سے چھوٹا ہے اور مینا کی منی جتنی لمبھائی ہے، مگر سودا سے لمبھی ہے، تو منی

A.(a) देवा पेक्षा उंच आहे.
A.Is taller than Deva
A. دیوا سے لمبھا ہے

B.(b) शिवा पेक्षा लहान आहे.
B.Shorter than Shiva
B.شیوا سے چھوٹا ہے

C.(c) शिवा इतकाच उंच आहे.
C.Is of same height as Shiva
C. شیوا جتنی لمبھائی ہے

D.(d) मीना पेक्षा लहान आहे.
D.Is shorter than Meena
D.مینا سے چھوٹا ہے

Answer: B.(b) शिवा पेक्षा लहान आहे.
B.Shorter than Shiva
B.شیوا سے چھوٹا ہے

106 **सूचना:** खालील प्रश्नात असे 3 घटक आहेत ज्यांचा परस्परांशी विशिष्ट संबंध आहे. समान संबंध वर्तुळाच्या संचांनी दर्शविलेला आहे, प्रत्येक वर्तुळ त्याचा आकार कितीही असला तरी, एका घटकाचे प्रतिनिधित्व करते. योग्य वर्तुळाच्या संचांशी खालील घटकांच्या जोड्या लावा.

DIRECTION: The question below has three items having certain relationship among them. The same relationship is expressed by sets of circles, each circle representing one item irrespective of its size. Match the items with right set of circles.

ہدایت:مندرجہ ذیل سوال میں تین آئٹم ہیں جن کے مابین مختلف تعلقات ہیں۔ دائروں کے ایک سیٹ کے ذریعہ یکساں تعلق ظاہر کیا جاتا ہے، ہر دائرہ سائز سے قطع نظر ایک آئٹم کی نمائندگی کرتا ہے۔ آئٹم کو دائروں کے درست سیٹ کے ساتھ ملائیں

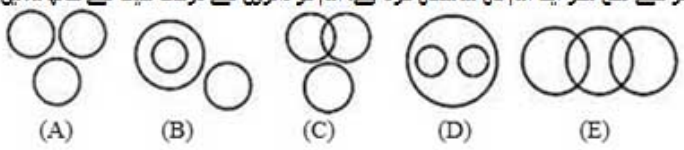

कीबोर्ड, मॉनिटर, माउस
Keyboard, Monitor, Mouse
کی بورڈ، مانیٹر، ماؤس

A. (A)

B. (B)

C. (C)

D. (D)

Answer: A. (A)

107 मन:स्थिती किंवा वर्तन बदलण्यासाठी कोणत्याही औषधी किंवा रसायनाचा वापर ज्यामुळे अपंगत्व येते त्याला म्हणतात

Use of any drug or chemical to modify mood or behaviour that results in impairment is known as

موڈ یا رویے کو تبدیل کرنے کیلیے کسی دوا یا کیمیکل کا استعمال جس کے نتیجے میں آنکھوں کی بینائی ضائع ہو جاتی ہے، اسے کہا جاتاہے:

A.औषधाचा गैरवापर
A.Drug Abuse
A.منشیات کے استعمال سے متاثر

B.मद्यविकार
B.Alcoholism
B.الکحل لینے سے متاثر

C.औषधांची ज्यादा मात्रा
C.Medication overdoes
C.دوا کا اوور ڈوز

D.यापैकी एकही नाही
D.None of these
D.ان میں سے کوئی نہیں

Answer: A.औषधाचा गैरवापर
A.Drug Abuse
A.منشیات کے استعمال سے متاثر

108 बुद्धिमत्ता म्हणजे क्षमतांचा समान संच असे सांगणारा सिद्धांत आहे

The theory which says intelligence is a similar set of abilities is

:وہ تھیوری جو یہ بتاتی ہے کہ ذہانت ایک یکساں طرح کی صلاحیات کا سیٹ ہے، وہ

A.अनेक/एक घटक
A.Uni/One factor
A. یونی ، ایک فیکٹر

B.दोन घटक सिद्धांत
B.Two factor theory
B.دو فیکٹر تھیوری

C.बहु बुद्धिमत्ता सिद्धांत
C.Multiple intelligence theory
C.کثیر العناصر ذہانت تھیوری

D.वरीलपैकी एकही नाही
D.None of the above
D.ان میں سے کوئی نہیں

Answer: A.अनेक/एक घटक
A.Uni/One factor
A. یونی ، ایک فیکٹر

109 सूचना: प्रत्येक प्रश्नाला एक प्रमुख विधानासोबत चार विधाने आहेत ज्यांच्याखाली A, B, C आणि D असे चार विधान आहेत. क्रमवार विधानांची जोडी निवडा ज्यामध्ये प्रथम विधान दुसऱ्या विधानाला सुचवते, आणि दोन्ही विधाने तर्किकदृष्ट्या प्रमुख विधानासोबत निगडित असेल.

चित्रपट मनोरंजक किंवा कंटाळवाणा आहे.
A. चित्रपट मनोरंजक आहे.
B. चित्रपट मनोरंजक नाही.
C. चित्रपट चित्रपट कंटाळवाणा आहे.
D. चित्रपट कंटाळवाणा नाही

DIRECTIONS: Each question has a main statement followed by four statements labelled A, B, C and D. Choose the ordered pair of statements, where the first statement implies the second, and the two statements are logically consistent with the main statement.

The Movie is either interesting or boring
A.The Movie is interesting
B.The Movie is not interesting
C.The Movie is boring
D.The Movie is not boring

ہدایت: ہر سوال میں ایک جملہ ہے جسکے بعد چار جملےاے، بی،سی اور ڈی کے نام سے دئے گئے ہیں اسمیں منسلک جوڑیوں کو چنئے۔ جہاں پہلا جملہ دوسرے جملہ کی اور اشارہ کر رہا ہے اور دو جملے منطقی مرکزی بیان کے مطابق ہیں

یہ فلم یا دلچسپ ہے یا بورنگ
Aفلم دلچسپ ہے ۔
Bفلم دلچسپ نہیں ہے ۔
Cفلم بورنگ ہے ۔
Dفلم بورنگ نہیں ہے ۔

A.BD
A.BD
A.BD

B.DA
B.DA
B.DA

C.CA
C.CA
C.CA

D.AB
D.AB
D.AB

Answer: B.DA
B.DA
B.DA

110 _____ हा एक समुह संरचनेचा घटक नाही.

_____ is not of one the elements of a group structure

_____ ، ایک گروپ ڈھانچے کے عناصر میں سے ایک نہیں ہے۔

A.प्रमाणक
A.Norms
A.عادات

B.स्थिती
B.Status
B.اسٹیٹس) حالت)

C.भूमिका
C.Role
C.کردار

D.पोषण
D.Nourishment
D.غذا

Answer: A.प्रमाणक
A.Norms
A.عادات

111 आकृतीचा अभ्यास करा आणि केवळ एक भाषा बोलू शकणारे लोक ओळखा.

Study the diagram and identify the people who can speak only one language.

ڈایاگرام کا مطالعہ کریں اور ان لوگوں کی شناخت کریں جو صرف ایک زبان بول سکتے ہیں۔

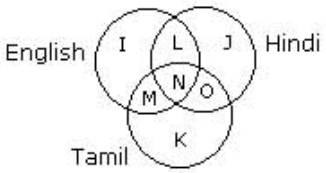

A. L + M + O

B. K + J + I

C. k

D. I

Answer: B. K + J + I

112 **सूचना:** * चिन्ह बदलण्यासाठी आणि दिलेल्या समीकरण समतोल करण्यासाठी गणिती चिन्हांचे अचूक संयोजन निवडा:

DIRECTIONS: Select the correct combination of mathematical signs to replace * signs and to balance the given equation:

ہدایت: ریاضی کی مِل کھاتی صحیح علامتوں کا انتخاب کیجیئے تاکہ * کا نشان بدل دیا جائے اور دیئے گئے مساوات کو معتدل کیا جائے:

16*4*64

A. × ÷

B. = ÷

C. × ×

D. × =

Answer: D. × =

113 DIRECTIONS: A sentence with an underlined phrasal verb is given below. Out of the four options, choose the one which can be substituted for the given phrasal Verb.
Lay by some money for a rainy day.

A.Spend recklessly

B.Spend extravagantly

C.Reserve for the future

D.Keep wasting

Answer: C.Reserve for the future

114 12% प्रति वर्ष दराने रू. 3000 या रकमेवर किती वर्षांमध्ये रू. 1080 एवढे सरळ व्याज मिळेल?

In how many years will a sum of Rs.3000 yield a S.I. of Rs.1080 at 12% per annum?

12 ؟فیصد کی در سے ایک مبلغ رقم 3000 روپیہ کا سود مفرد 1080روپیہ کتنے سالوں میں ہوگا/

A.3
A.3
A.3

B.4
B.4
B.4

C.2
C.2
C.2

D.5
D.5
D.5

Answer: A.3
A.3
A.3

115 ‘कुटील‘ या शब्दाचा समानार्थी शब्द कोणता ?

A.सरळ

B.भला

C.निर्द्वेशी

D.मत्सरी

Answer: D.मत्सरी

116 खालील प्रश्नांमध्ये प्रश्न चिन्हाच्या जागी (?) काय येईल?
357 × 5/7 × 3/5 =?

What will come in place of the question mark (?) in the following questions?
3/5 × 5/7 × 357=?

نیچے دئے ہوئے سوالات میں سوالیہ نشان (؟) کی جگہ کیا آئیگا.: ہدایت
3/5 × 5/7 × 357=?

A.51
A.51
A.51

B.153
B.153
B.153

C.255
C.255
C.255

D.159
D.159
D.159

Answer: B.153
B.153
B.153

117 खालील आकृतीमध्ये किती आयत आहेत?

How many rectangles are there in the following figure?

دی ہوئی شکل میں کتنے مستطیل ہیں؟

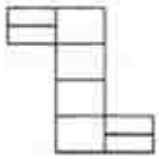

A. 8

B. 18

C. 17

D. 20

Answer: B. 18

118

सूचना: खालील प्रश्नात कागदाच्या एक तुकड्याला (चौकोनी / गोलाकार / त्रिकोणी) घड्या घातल्या आहेत व भोके पाडली आहेत. हा कागद उलगडल्यावर प्रश्नातील आकृतीप्रमाणे दिसतो. उत्तरादाखल पर्यायांमधून अशी आकृती निवडा जी उलगडल्यावर कागदाचे स्वरूप प्रश्नात दाखविल्याप्रमाणे दिसेल.

DIRECTIONS: In the following question. a sheet (square/circle/triangle) of paper is folder and punch is made. When unfolded the paper sheet looks like the question figure. See the answer figures and select the one that follows the manner in which the paper is folded and punch is made.

ہدایات: نیچے دیئے گئے سوال میں، کاغذ کی شیٹ (مثلث، مربع، دائرہ) فولڈ کرکے پنچ لگائی گئی ہے، جب بغیر فولڈ کی ہوئی کا غذ کی شیٹ سوالیہ شکل کی طرح دکھتی ہے، جوابی شکلوں کو دیکھ کر اسکو چنئے جو ایسی لگے کہ، کاغذ شیٹ کو فولڈ کرکے پنچ لگایا گیا ہے۔

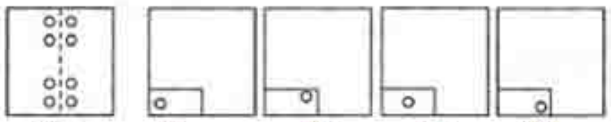

A. (A)

B. (B)

C. (C)

D. (D)

Answer: D. (D)

119

असे असल्यास मूल अंमली पदार्थांचे व्यसन असलेले जन्माला येतात

A child is born a drug addict than if

ایک بچہ اس سے زیادہ منشیات کا عادی ہوتا ہے اگر

A.माता सेवन करत असलेले अंमली पदार्थ बाळाच्या रक्त प्रवाहात मिसळल्यास
A.drugs used by mother pass into child's blood stream
A.ماں منشیات کا استعمال کرتی ہے جو بچہ کے خون کے دھار میں چلا جاتا ہے

B.वंशपरंपरेने प्राप्त व्यसने
B.addictions inherited
B.لت موروثی ہوتی ہے

C.माता घेत असलेले अंमली पदार्थ गुणसूत्रांमधील दोष दूर करतात
C.drugs used y mother treat defects in chromosomes
C.جو ماں منشیات کا استعمال کرتی ہے کروموسوم کے نقص کو دور کرتا ہے

D.वरीलपैकी कोणतेही नाही
D.none of the above
D.درج بالا میں سے کوئی نہیں

Answer: A.माता सेवन करत असलेले अंमली पदार्थ बाळाच्या रक्त प्रवाहात मिसळल्यास
A.drugs used by mother pass into child's blood stream
A.ماں منشیات کا استعمال کرتی ہے جو بچہ کے خون کے دھار میں چلا جاتا ہے

120 कविताला दोन मुले आहेत, एक इशानचा मुलगा आहे. इशानने इशिताच्या आईसोबत लग्न केले आहे. इशान आणि इशिताचे नाते काय?

Kavita has two sons; one of the son is Ishaan. Ishaan is married to Ishita's mother. How is Ishaan related to Ishita?

کویتا کے دو بیٹے ہے؛ ایک بیٹا اشان ہے. اشان کی شادی اشتہ کی ماں سے ہوئی ہے. اشان کا اشتہ سے کیا رشتہ ہے؟

A.भाऊ
A.Brother
A.بھائی

B.काका
B.Uncle
B.چاہا

C.वडील
C.Father
C.باپ

D.मुलगा
D.Son
D.بیٹا

Answer: C.वडील
C.Father
C.باپ

121 दोन प्रकाराच्या मोजपट्ट्या लहान मोजपट्टी आणि लांब मोजपट्टी _____यात आढळतात.

Two types of scales short scales & long scales are found in

دو قسم کے ترازو میں مختصر ترازو اور لمبی ترازو موجود ہیں

A.MPI
A.MPI
A.MPI

B.MMPI
B.MMPI
B.MMPI

C.GMAT
C.GMAT
C.GMAT

D.RIT
D.RIT
D.RIT

Answer: A.MPI
A.MPI
A.MPI

122 एटॉम बम हे या तत्त्वावर आधारित आहे:

An Atom Bomb is based on the principle of:

ایک ایٹم بم _____ کے اصول پر مبنی ہوتا ہے۔

A.परमाणु विखंडन
A. Nuclear fission
A.نیوکلیئر فیشن

B.परमाणु मिश्रण
B. Nuclear fusion
B.نیوکلیئر فیوژن

C.साधी रासायनिक प्रतिक्रिया
C. Simple Chemical reaction
C.محض کیمیکل ردعمل

D.यापैकी एकही नाही
D. None of these
D.ان میں سے کوئی بھی نہیں

Answer: A.परमाणु विखंडन
A. Nuclear fission
A.نیوکلیئر فیشن

123 सूचना: हे प्रश्न खालील माहितीवर आधारित आहेत.
सहा मुले - A, B, C, D, E आणि F हे रांग -I मध्ये उत्तर दिशेकडे बघत बसलेले आहेत आणि सहा मुली P, Q, R, S, T आणि U रांग -II मध्ये दक्षिण दिशेकडे बघत बसलेल्या आहेत. रांग -I मधील प्रत्येक व्यक्ती रांग -II मधल्या एक व्यक्तीच्या अगदी समोर बसली आहे.
T हा D च्या विरुद्ध बसलेला आहे, जो कुठल्याही अंतिम टोकावर बसलेला नाही. P हि T च्या तात्काळ डावीकडे आहे. E हि कोणत्याही टोकाला बसलेली नाही तसेच D च्या बाजूला हि बसलेली नाही. U हि C च्या समोर बसलेली आहे, जो F च्या डावीकडून दुसरा आहे. बरोबर तीन व्यक्ती P आणि U च्या मध्ये बसलेले आहेत. Q किंवा R हे दोन्हीही U चे शेजारी नाहीत. S हि Q च्या समीप बसलेली नाही. B हा A च्या उजवीकडे आहे.
खालीलपैकी काय सत्य आहे?

DIRECTIONS: These questions are based on the following information.
Six boys - A, B, C, D, E, and F are sitting in row-I facing to the North and six girls P, Q, R, S, T and U – are sitting in row - II facing to the South. Each person from row-I is facing exactly one person in row-II. T is sitting opposite D, who is not sitting at any of the extreme end. P is to the immediate left of T. E is neither sitting at any extreme end nor adjacent to D. U is sitting opposite C, who is second to the left of F. Exactly three persons are sitting between P and U. Neither Q nor R are neighbours of U. S is not sitting adjacent to Q. B is to the right of A.
Which of the following is true?

ہدایات: یہ سوالات مندرجہ ذیل معلومات پر مبنی ہیں۔
چھ لڑکے - A، B، C، D، E اور F – قطار I میں شمال کا رخ کیے ہوئے بیٹھے ہیں اور چھ لڑکیاں P، Q، R، S، T اور U – قطار II میں ایک شخص کے ٹھیک سامنے بیٹھا ہے۔ II-میں جنوب کا رخ کیے ہوئے بیٹھی ہیں۔ قطار I-میں ہر شخص قطار
T، D نہ تو کسی انتہائی سرے پر E کے فوری بائیں طرف ہے۔ P، T کے بالمقابل بیٹھی ہے، جو کسی بھی انتہائی سرے پر نہیں بیٹھا ہے۔ کے درمیان ٹھیک تین U اور P کے بائیں طرف سے دوسرا ہے۔ F کے بالمقابل بیٹھی ہے، جو U، C کے بغل میں بیٹھا ہے۔ D اور نہ ہی کے دائیں طرف ہے۔ B، A کے بغل میں نہیں بیٹھی ہے۔ S، Q کے پڑوسی ہیں۔ R، U نہ ہی Q لوگ بیٹھے ہیں۔ نہ تو
مندرجہ ذیل میں سے کون درست ہے؟

A.E हा R च्या समोर बसलेला आहे
A.E is sitting opposite R
A.E، R کے بالمقابل بیٹھا ہے

B.D हा A चा शेजारी आहे
B.D is a neighbour of A
B.D، A کا پڑوسی ہے

C.F हा B च्या डावी कडून दुसऱ्या जागेवर बसला आहे
C.F is sitting second to the left of B
C.F، B کے بائیں سے دوسرے پر بیٹھا ہے

D.T हि Q च्या डाव्या बाजूस आहे
D.T is to the left of Q
D.T، Q کے بائیں طرف ہے

Answer: B.D हा A चा शेजारी आहे
B.D is a neighbour of A
B.D، A کا پڑوسی ہے

124 सूचना: खालील प्रश्नांमध्ये दिलेल्या पर्यायांमधून संबंधित अक्षर समूह निवडा.

HJLN: PRTV :: JLNP: ?

DIRECTIONS: In the following question, select the related group of letters from the given alternatives.

HJLN: PRTV :: JLNP: ?

سمت: مندرجہ ذیل سوال میں، دیے گئے متبادل میں سے حروف کا متعلقہ گروپ منتخب کریں۔

HJLN: PRTV :: JLNP: ?

A.RTPL
A.RTPL
A.RTPL

B.RTPK
B.RTPK
B.RTPK

C.RTPJ
C.RTPJ
C.RTPJ

D.RTVX
D.RTVX
D.RTVX

Answer: D.RTVX
D.RTVX
D.RTVX

125 हरियाणामध्ये कोणते प्रसिद्ध पक्षी अभयारण्य आहे?

Which is a famous bird sanctuary located in Haryana?

ہریانہ میں واقع ایک مشہور چڑیوں کی جائے پناہ (bird sanctuary) ؟ ہے

A.सुलतानपूर
A.Sultanpur
A. سلطان پور میں

B.भारतपूर
B.Bharatpur
B. بھرت پورمیں

C.राजाजी
C.Rajaji
C. راجاجی میں

D.सरिस्का
D.Sariska
D. سرسکا میں

Answer: A.सुलतानपूर
A.Sultanpur
A. سلطان پور میں

126 खालीलपैकी कोण टेनिस खेळाडू आहे?

Who out of the following is a tennis player?

انمیں سے کون ٹینس کھلاڑی ہے :

A.पी.व्ही. सिंधु
A.P.V. Sindhu
A.پی وی سندھو

B.सायना नेहवाल
B.Saina Nehwal
B.سائنہ نہوال

C.ज्वाला गुट्टा
C.Jwala Gutta
C.حوالا گٹا

D.यांपैकी कोणतेही नाही
D.None of these
D.انمیں سے کوئی نہیں

Answer: D.यांपैकी कोणतेही नाही
D.None of these
D.انمیں سے کوئی نہیں

127 मला एक मूल द्या, मी त्याला मला आवडेल तसा विकसित करिनहे विधान यावर भर देते

‘Give me a child, I can develop him as I like’.
This statement gives emphasis upon—

مجھے ایک بچہ دو، میں اسے تیار کر سکتا ہوں جیسے مجھے پسند ہے.
یہ بیان اس پر زور دیتا ہے-

A.पर्यावरण
A.Environment
A.ماحولیات

B.आनुवंशिकता
B.Heredity
B.موروثی

C.ए आणि बी दोन्ही
C.Both A and B
C.A اور B دونوں

D.वरीलपैकी काहीही नाही
D.None of the above
D.اوپر میں سے کوئی نہیں

Answer: A.पर्यावरण
A.Environment
A.ماحولیات

128 Out of the given four words only one is spelt correctly. Find the word that is correctly spelt.

A.Curiosity

B.Excstacy

C.Experiance

D.Existance

Answer: A.Curiosity

129 पुढील म्हण पूर्ण करा - ‘ इकडे आड तिकडे --------- ‘

A.विहीर

B.पाड

C.झाड

D.माडी

Answer: A.विहीर

130 सरळ रूप द्या:
84563286 – 48956218 = ?

Simplify:
84563286 – 48956218 = ?

سادہ بنائیں:
84563286 – 48956218 = ?

A.34607068
A.34607068
A.34607068

B.35606068
B.35606068
B.35606068

C.35507068
C.35507068
C.35507068

D.35607068
D.35607068
D.35607068

Answer: D.35607068
D.35607068
D.35607068

131 दमन करण्यात आलेल्या विस्मृत उदात्तपणे आकलन होणाऱ्या अनुभवांचे भांडार

The storehouse of repressed forgotten sublimely perceived experiences

دلکشی کے ساتھ ماخوذ شدہ وہ تجربے جسے گھٹن کے اسٹور ہاوس نے بھلا دیا

A.वैयक्तिक अबोध
A.Personal unconscious
A.ذاتی لاشعوری

B.अंतर्मुखता
B.Introversion
B.باطنیت

C.आदिमरूप
C.Archetypes
C.آرک ٹائپ

D.बोधावस्था
D.Conscious
D.شعور

Answer: A.वैयक्तिक अबोध
A.Personal unconscious
A.ذاتی لاشعوری

132 दोन व्यक्ती A आणि B यांनी एकमेकांच्या दिशेने येण्यास दोन भिन्न ठिकाणांहून सुरूवात केली. जर त्यांच्या गतीचे गुणोत्तर 3:5 असेल, तर भेटण्याच्या बिंदूपर्यंत A आणि B दोघांद्वारे पार केलेल्या अंतराचे अनुक्रमे गुणोत्तर काय आहे?

Two persons A and B started from two different places towards each other. If the ratio of their speeds be 3: 5, then what is the ratio of distance covered by A and B respectively till the point of meeting

ایک دوسرے کی طرف دو مختلف جگہوں سے سفر شروع کیا۔ اگر ان کی رفتار کا تناسب 5: 3 ہو، تو ملاقات کےمقام B اور A دو افراد کتنا فاصلہ طے کیا ہےB اور A تک بالترتیب

A.1:2
A.1:2
A.1:2

B.3:4
B.3:4
B.3:4

C.3:5
C.3:5
C.3:5

D.5:3
D.5:3
D.5:3

Answer: C.3:5
C.3:5
C.3:5

133	खालीलपैकी अशुद्ध वाक्य कोणते ?
	A.टांग्याचा आवाज ऐकून लता बाहेर आली.
	B.पुढच्या वेळी मी समोर बसण्याला व्यवस्था करतो.
	C.आता सगळी जबाबदारी तुझ्यावर आहे.
	D.अभिषेकला पाहून त्याला आनंद झाला.
Answer:	B.पुढच्या वेळी मी समोर बसण्याला व्यवस्था करतो.

134	मॉरीशियस हे _____ या खंडामधील राष्ट्र आहे – Mauritius is an island nation in the continent of- ماریش بر اعظم ----------کا ایک جزیرہ ملک ہے :
	A.आशिया A.Asia A.ایشیا
	B.आफ्रिका B.Africa B.افریقہ
	C.युरोप C.Europe C.یورپ
	D.ऑस्ट्रेलिया D.Australia D.آسٹریلیا
Answer:	B.आफ्रिका B.Africa B.افریقہ

135	सर्वांना माहीत असलेला प्राणी फिला जिवाश्म नोंदीमध्ये संबोधित केला जातो Most known animal phyla appeared in the fossil record فوصیل ریکارڈ کے حساب سے سب سے زیادہ معلوم جانور phyla۔ جانا جاتا ہے

A.समुद्रीप्रजाती म्हणून
A.As marine species
A. سمندری پرجاتیوں کے طور پر

B.रूपांतरण म्हणून
B.As metamorphosis
B. تبادلوں کے طور پر

C.परावलंबी म्हणून
C.As heterotrophs
C.heterotrophs بطور

D.वरीलपैकी सर्व
D.All the above
D. تمام مندرجہ بالا

Answer: A.समुद्रीप्रजाती म्हणून
A.As marine species
A. سمندری پرجاتیوں کے طور پر

136 Choose the word which is opposite in meaning to the given word.
RELUCTANT

A.Willing

B.Unwilling

C.Unenthusiastic

D.Opposed

Answer: A.Willing

137 सरळ रूप द्या:
86.86 + 999.99 + 1.11 = ?

Simplify:
86.86 + 999.99 + 1.11 = ?

آسان بنائیں:
86.86 + 999.99 + 1.11= ?

A.1088.96
A.1088.96
A.1088.96

B.1087.96
B.1087.96
B.1087.96

C.1089.96
C.1089.96
C.1089.96

D.1090.96
D.1090.96
D.1090.96

Answer: B.1087.96
B.1087.96
B.1087.96

138 सूचना: खाली दिलेल्या विधान (A) आणि कारण (R) साठी, खालील पैकी योग्य पर्याय निवडा:

विधान (A): कॅल्शियम संतुलित आहारांचा एक महत्त्वाचा भाग आहे.
कारण (R): दूध आणि अंडी कॅल्शियमने समृध्द असतात.

DIRECTION: For the Assertion (A) and Reason (R) given below, choose the correct alternative from the following:

Assertion (A): Calcium is an important part of balanced diet.
Reason (R): Milk and eggs are rich in calcium.

ہدایت: نیچے دئیے گئے اسرشن (A) اور (R) وجہ کے لئے، مندرجہ ذیل میں سے صحیح متبادل منتخب کریں:

اسرشن (A): کیلشیم متوازن غذا کا ایک اہم حصہ ہے.
وجہ (R): دودھ اور انڈوں میں بھرپور کیلشیم پایا جاتا ہے۔

A.दोन्ही (A) आणि (R) सत्य आहेत आणि (R) (A) च योग्य स्पष्टीकरण आहे.
A.Both (A) and (R) are true and (R) is the correct explanation of (A).
A. (A) اور (R) دونوں صحیح ہیں اور (R) (A) کی درست وضاحت ہے

B.दोन्ही (A) आणि (R) खरे आहेत, परंतु (R) (A) च योग्य स्पष्टीकरण नाही
B.Both (A) and (R) are true, but (R) is not the correct explanation of (A)
B. (A) اور (R) دونوں صحیح ہیں، لیکن (R) (A) کی درست وضاحت نہیں ہے

C.(A) सत्य आहे, परंतु (R) खोटे आहे
C.(A) is true, but (R) is false
C. (A) صحیح ہے، لیکن (R) غلط ہے

D.(A) खोटे आहे, परंतु (R) सत्य आहे
D.(A) is false, but (R) is true
D. (A) غلط ہے، لیکن (R) صحیح ہے

Answer: B.दोन्ही (A) आणि (R) खरे आहेत, परंतु (R) (A) च योग्य स्पष्टीकरण नाही
B.Both (A) and (R) are true, but (R) is not the correct explanation of (A)
B. (A) اور (R) دونوں صحیح ہیں، لیکن (R) (A) کی درست وضاحت نہیں ہے

139 खालीलपैकी कोण राज्यसभेचे विघटन करू शकतो?

Who of the following can dissolve Rajya Sabha?

مندرجہ ذیل میں سے کون راجیہ سبھا کو تحلیل کر سکتا ہے؟

A.राष्ट्रपती
A.President
A. صدر

B.पंतप्रधान
B.Prime Minister
B. وزیر اعظم

C.लोकसभा सभापती
C.Lok Sabha Speaker
C. لوک سبھا اسپیکر

D.तिचे कधीच विघटन केले जात नाही
D.It can never be dissolved
D. اسکو تحلیل نہیں کیا جا سکتا

Answer: D.तिचे कधीच विघटन केले जात नाही
D.It can never be dissolved
D. اسکو تحلیل نہیں کیا جا سکتا

140 सूचना: यांपैकी प्रत्येक प्रश्नामध्ये दोन विधानांनंतर तीन निष्कर्ष I, II आणि III क्रमांकाने दर्शविले आहेत. सामान्यपणे माहीत असलेल्या तथ्यांबरोबर जुळत नसली तरी खालील विधाने सत्य आहेत असे समजा आणि दिलेल्या विधानांवरुन तर्कशास्त्राच्या दृष्टीने दिलेल्या निष्कर्षांपैकी कोणते योग्य आहेत ते ठरवा.
निवेदन:
सर्व नेट जेट आहेत.
सर्व जेट सेट आहेत.
निष्कर्ष:
I. सर्व जेट नेट आहेत.
II. काही सेट न नेट आहेत न जेट.
III. कोणताही सेट नेट नाही.

DIRECTION: In each of these questions there are two statements followed by three conclusions numbered I, II and III. You have to take the given statements to be true even if they seem to be at variance from commonly known facts and then decide which of the given conclusion logically follows from the given statements.

Statements:
All nets are jets.
All jets are sets.

Conclusions
I. All jets are nets.
II. Some sets are neither nets nor jets.
III. No set is a net.

ہدایت:ان میں سے ہر ایک سوال میں دو بیانات دیے گئے ہیں جن کے بعد تین نتائج نمبر I، II اور III دیے گئے ہیں۔ آپ کو دیے گئے بیانات کو درست تسلیم کرنا ہے اگرچہ وہ عام طور پر معلوم حقائق کے برعکس نظر آتے ہوں اور پھر فیصلہ کریں کہ کن سے دیے گئے نتائج منطقی طور پر دیے گئے بیانات کی پیروی کرتے ہیں۔

بیانات:
سبھی نیٹ جیٹ ہیں۔
سبھی جیٹ سیٹ ہیں۔

نتائج
I. سبھی جیٹ نیٹ ہیں۔
II. کچھ سیٹ نہ تو نیٹ ہیں نہ ہی جیٹ ہیں۔
III. کوئی سیٹ نیٹ نہیں ہے۔

A.केवळ निष्कर्ष I निघत असल्यास.
A.Only I follows
A.صرف I پیروی کرتا ہے

B.केवळ निष्कर्ष III निघत असल्यास.
B.Only III follows
B.صرف III پیروی کرتا ہے۔

C.केवळ निष्कर्ष II निघत असल्यास.
C.Only II follows
C.صرف II پیروی کرتا ہے

D.खालील पैकी कोणताही नाही.
D.None follows
D.کوئی پیروی نہیں کرتا ہے

Answer: D.खालील पैकी कोणताही नाही.
D.None follows
D.کوئی پیروی نہیں کرتا ہے

141 1, 8, 9 व 14 ची सरासरी आहे:

The average of 1, 8, 9 and 14 is:

1,8,9 اور 14 کا اوسط ہے

A.8
A.8
A.8

B.5
B.5
B.5

C.6
C.6
C.6

D.2
D.2
D.2

Answer: A.8
A.8
A.8

142 बालवाडीत मुलाने खोटे बोलणे हे याचे लक्षण आहे

Lying in preschool child is a sign of

پری اسکول بچپن میں جھوٹ بولنا علامت ہوسکتی ہے

A.अभिव्यक्तीक्षमता
A.Expressive oneself
A.خود کے اظہار رائے

	B.विकसित बुद्धिमत्ता B.Developed intelligence B.ذہانت کی ترقی
	C.पालकांना सुखवणे C.pleasing the parents C.والدین کو خوش کرنے
	D.वरीलपैकी सर्व D.All of the above D.درج بالا سبھی
Answer:	D.वरीलपैकी सर्व D.All of the above D.درج بالا سبھی

143	Out of the four alternatives, choose the one which can be substituted for the given words/sentence. A place where beer is made commercially
	A.Brewery
	B.Bakery
	C.Scullery
	D.Pilgrimage
Answer:	A.Brewery

144 विधान:
कमी दर्जामुळे भारतीय उद्योग आंतरराष्ट्रीय पातळीवर स्पर्धा करू शकत नाहीत.

कृतीचा कोर्स:
I. भारतीय उद्योगांनी आंतरराष्ट्रीय मानदंड स्वीकारले पाहिजेत.
II. भारतीय उद्योगांनी मानकांची समज निर्माण करण्यासाठी किंमती वाढवावीत.

Statement:
Indian industries fail to compete internationally due to low standards.

Course of actions:
I. Indian industries should adopt international standards.
II. Indian industries should increase price for creating perception of standard

بیان:
انڈین صنعتیں کم معیار کی وجہ سے انٹرنیشنل لیول پر مقابلہ کرنے میں ناکام ہیں۔

لائحہ عمل:
I۔ انڈین انڈسٹری کو انٹرنیشنل اسٹینڈرڈ اپنا نا چاہیے۔
II۔ انڈین اسٹری کو معیار کے تصور کے لیے قیمتوں میں اضافہ کرنا چاہیے۔

A.फक्त I अनुसरून आहे
A.Only I follows
A. صرف I لاگو ہو گا۔

B.फक्त II अनुसरण करते आहे
B.Only II follows
B. صرف II لاگو ہو گا۔

C.एकतर I किंवा II अनुसरून आहे
C.Either I or II follows
C. I یا II میں سے ایک لاگو ہو گا۔

D.I किंवा II दोन्हीपैकी काहीही अनुसरण करत नाही
D.Neither I nor II follows
D. I اور II میں سے کوئی بھی لاگو نہیں ہو گا۔

Answer: A.फक्त I अनुसरून आहे
A.Only I follows
A. صرف I لاگو ہو گا۔

145	7168 × 562 = 562 × ? 7168 × 562 = 562 × ? 7168 × 562 = 562 × ?
	A.7168 A.7168 A.7168
	B.562 B.562 B.562
	C.7164 C.7164 C.7164
	D.522 D.522 D.522
Answer:	A.7168 A.7168 A.7168
146	सूचनाः दिलेल्या पर्यायांमधून ऍनालॉगस शब्द निवडा. नेफेलोलॉजीचा संबध ढगांसोबत आहे जसा लिम्नोलॉजीचा संबंध ...सोबत आहे. DIRECTIONS: Choose the analogous word from the given alternatives. Nephology is to clouds as Limnology is to _____. ہدایات: دیے گئے متبادل سے مطابق لفظ کا انتخاب کریں نفلوجی اگر بادلوں کے متعلق ہے تو لیمنولوجی -------- کے متعلق.
	A.जलाशय A.Water bodies A.پانی کے زخائر
	B.सस्तन प्राणी B.Mammals B.دودھ پلانے والے جانور

C.शब्दरचना
C.Lyrics
C. گیت

D.धर्म
D.Religion
D. مذہب

Answer: A.जलाशय
A.Water bodies
A.پانی کے زخائر

147 9:53 ला मिनिट आणि तास काट्यादरम्यान कोणता कोण असेल?

What is the angle between minute and hour hand at 9:53?

9:53 پر منٹ اور گھنٹہ کی سوئیاں کونسا زاویہ بناتی ہیں؟

A.121.5°
A.121.5°
A.121.5°

B.21.5°
B.21.5°
B.21.5°

C.130°
C.130°
C.130°

D.68.5°
D.68.5°
D.68.5°

Answer: B.21.5°
B.21.5°
B.21.5°

148 असे गृहीत धरले जाते की उन्हाळ्याच्या सुट्टीमध्ये विद्यार्थी मोठ्या प्रमाणात शिकत नाहीत, यापैकी कोणती गोष्ट उन्हाळ्याच्या महिन्यांमध्ये कमीत कमी घसरताना दिसते?

It has been seen that the students lose much of their learning during summer vacation, which one of the following shows the least depreciation over the summer months?

یہ دیکھا گیا ہے کہ طلباء موسم گرما کے چھٹیوں کے دوران سیکھے ہوئے کو زیادہ تر ضائع کر دیتے ہیں، ذیل میں سے کونسا ایک موسم گرما کے مہینے میں کم از کم کمی کو ظاہر کرتا ہے؟

A.अंकगणित
A.Arithmetic computation
A.ریاضی کی درجہ بندی

B.अंकगणित तर्क
B.Arithmetic reasoning
B.ریاضیاتی استدلال

C.ऐतिहासिक तारखा आणि ठिकाणे
C.Historical dates and places
C.تاریخی تاریخیں اور مقامات

D.विरामचिन्हांचे नियम आणि व्याकरण
D.Rules of punctuation and grammar
D.گرامر کے قواعد و ضوابط

Answer: B.अंकगणित तर्क
B.Arithmetic reasoning
B.ریاضیاتی استدلال

149 सर्वात मजबुत हाड येथे असते:

The strongest bone of the body is present in the

جسم کی سب سے مضبوط ہڈی ---------- میں موجود ہے۔

A.गळ्यात
A. Neck
A.گردن

B.जबड्यात
B. Jaw
B.جبڑا

C.भुजात
C. Arm
C.بازو

D.मांडीत
D. Thigh
D.جانگھ

Answer: D.मांडीत
D. Thigh
D.جانگھ

150 फोनोग्राफ हे पहिले उपकरण होते ज्यात आवाजाची नोंद करून त्यावर प्ले करू शकतो:

Phonograph was the first device that could record and play back sound, invented by:

فونوگراف پہلا ڈیوائس تھا جس کے ذریعہ پیچھے کی آواز کو ریکارڈ کیا جا سکا اور چلایا جا سکا، جس کی ایجاد _____ نے کی۔

A.आयझॅक न्यूटन
A. Isaac Newton
A.ایساک نیوٹن

B.थॉमस अल्वा एडिसन
B. Thomas Alva Edison
B.تھومس الوا ایڈیسن

C.लेव्हीझियर
C. Lavoisier
C.لیووزیئر

D.मार्कोनी
D. Marconi
D.مارکونی

Answer: B.थॉमस अल्वा एडिसन
B. Thomas Alva Edison
B.تھومس الوا ایڈیسن

151 ‘ मन्वंतर ’ या शब्दाची संधी सोडवा.

A.मन + अंतर

B.मत + अंतर

C.मनु + अंतर

D.मानव + अंतर

Answer: C.मनु + अंतर

152	शिकण्याचा निष्कर्ष म्हणजे The meaning of learning outcome is— سیکھنے کے نتائج کا مطلب ہے—
	A.विद्यार्थ्यांच्या वर्तन मध्ये बदल A.The change in student's behaviour A.طالب علم کے رویے میں تبدیلی
	B.शिक्षकांच्या शिक्षण पद्धतींमध्ये बदल B.The change in teaching methods of a teacher B.ایک استاد کے طریقہ تدریس میں تبدیلی
	C.सामग्रीचे परिष्करण C.The refinement of content C.مواد کی صفائی
	D.वरीलपैकी काहीही नाही D.None of the above D.اوپر میں سے کوئی نہیں
Answer:	A.विद्यार्थ्यांच्या वर्तन मध्ये बदल A.The change in student's behaviour A.طالب علم کے رویے میں تبدیلی

153	209 × 201= ? 209 × 201= ? 209 × 201= ?
	A.4209 A.4209 A.4209
	B.42009 B.42009 B.42009
	C.420009 C.420009 C.420009

D.42109
D.42109
D.42109

Answer: B.42009
B.42009
B.42009

154 **सूचना**: खालील आकृतीचे प्रतिबिंब शोधून काढा.

DIRECTIONS: Find the mirror image of the figure given below.

ہدایات: نیچے دیئے گئے شکل کی آئینہ معکوس شکل کیا ہوگی۔

मुख्य आकृती
Question Figure:
اصل شکل



उत्तरासाठी पर्यायी आकृत्या
Answer Figure:
جوابی شکل

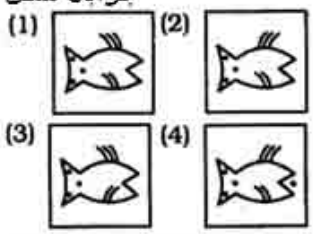

A. 1

B. 2

C. 3

D. 4

Answer: A. 1

155 कुआलालंपुर ही _____ ची राजधानी आहे –

Kuala Lumpur is the capital of –

کوالالمپور راجدھانی ہے :

A.मलेशिया
A.Malaysia
A.ملیشیا کی

B.भूतान
B.Bhutan
B.بھوٹان کی

C.थायलँड
C.Thailand
C.تھائیلینڈ کی

D.सिंगापूर
D.Singapore
D.سنگا پور کی

Answer:

A.मलेशिया
A.Malaysia
A.ملیشیا کی

156 ऐतिहासिकदृष्ट्या, पारंपारिक शाळेतील विद्यार्थ्यांना प्रोत्साहन देण्याचे मूलभूत घटक होते त्यांचे

Historically, the basic factor involved in the promotion of pupils in the conventional school was their—

تاریخی طور پر، روایتی اسکول میں طالب علموں کو فروغ دینے میں ملوث بنیادی عنصر ان کے--- تھے

A.वयोमानानुसार वय
A.Chronological age
A.کرونولوجیکل عمر

B.सामाजिक परिपक्वता
B.Social maturity
B.سماجی پختگی

C.शैक्षणिक यश
C.Academic achievement
C.تعلیمی کامیابی

D.बुद्धिमत्ता
D.Intelligence
D.ذہانت

Answer: C.शैक्षणिक यश
C.Academic achievement
C.تعلیمی کامیابی

157 सूचना: खालील प्रश्नांमध्ये दिलेल्या पर्यायांमधून संबंधित अक्षर/शब्द/संख्या निवडा.

हातमोजा : हात :: ? : ?

DIRECTIONS: In the following question, select the related letter/word/number from the given alternatives.

Glove : Hand :: ? : ?

سمت: مندرجہ ذیل سوال میں، دیے گئے متبادل سے متعلقہ حرف/لفظ/نمبر منتخب کریں۔

دستانہ : ہاتھ :: ؟ : ؟

A.मान : कॉलर
A.Neck : Collar
A.گردن : کالر

B.टाय : सदरा
B.Tie : Shirt
B.ٹائی : شرٹ

C.मोजे : फूट
C.Socks : Feet
C.موزے : پیر

D.कोळसा : पाकीट/ पोकळी
D.Coal : Pocket
D.کوئلہ : جیب

Answer: C.मोजे : फूट
C.Socks : Feet
C.موزے : پیر

158 **सूचना:** दिलेल्या चारांपैकी वेगळी (असंबद्ध) असणारी आकृती शोधून काढा.

DIRECTIONS: Find the odd figure from the given four figures.

ہدایات: دیئے گئے چار شکلوں میں سے طاق شکل کونسی ہے؟

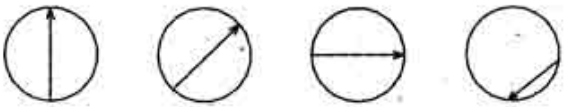

A. (A)

B. (B)

C. (C)

D. (D)

Answer: D. (D)

159 निर्देश: खालील प्रश्न दिलेल्या शब्दांवर आधारित आहेत.

here/ bright/ pride/ stout

जर दिलेल्या शब्दांमध्ये स्वरांना मागील अक्षराने बदलले तर व्यंजनाची जागा त्याच्या पुढच्या अक्षराने बदलली तर किती शब्दन मध्ये किमान एक स्वर असेल?

DIRECTIONS: Following question is based on the given words.

here/ bright/ pride/ stout

If in the given words vowels are replaced with its previous letter and Consonants are replaced with its next letter then how many words have at least one vowel?

ہدایت جیل کے سوال دے ہے لفجونپر مشتمل ہیں

here/ bright/ pride/ stout

اگر ان لفجوں مے ہر حرف کو انگریجی حرف تہجیبی کے اگلے حرف سے بدلہ جائے تو صرف یک واول والے کتنے لفج ہونگے؟

A.एक
A.One
A.ایک

B.दोन
B.Two
B.دو

C.तीन
C.Three
C.تین

D.चार
D.Four
D.چار

Answer: D.चार
D.Four
D.چار

160 एका घनाला रंगवून किमान शक्य संख्येचे काप करून 36 लहान पण एकसारख्या तुकड्यांमध्ये कापले गेले आहे. तंतोतंतपणे रंगवलेले तीन चेहरे असलेले किती लहान तुकडे आहेत?

A cube is painted and cut into 36 smaller but identical pieces by making the minimum possible number of cuts.
How many smaller pieces have exactly three painted faces?

ایک کیوب کو ایک جیسے 36 ٹکڑوں میں رنگ دے کر کاٹا گیا ہے۔ کم سے کم ممکن کٹ لگاتے ہو, کتنے حتمی چھوٹے ٹکڑے ہوں گے جن کے 3 منہ رنگین ہوں گے؟

A.12
A.12
A.12

B.8
B.8
B.8

C.36
C.36
C.36

D.24
D.24
D.24

Answer: B.8
B.8
B.8

161 ईश्वर नाही असे मानणारा -

A.आस्तिक

	B.नास्तिक
	C.पाखंडी
	D.बडवा
Answer:	B.नास्तिक

162	निर्देश: खालील शब्दांची इंग्रजी शब्दकोशानुसार मांडणी करा. (a) Mother (b) Monitor (c) Monkey (d) Master (e) Matter DIRECTIONS: Arrange the following words according to the English dictionary. (a) Mother (b) Monitor (c) Monkey (d) Master (e) Matter ہدایت: انگریزی لغت کے مطابق مندرجہ ذیل الفاظ کو مرتب کریں۔ (a) Mother (b) Monitor (c) Monkey (d) Master (e) Matter
	A.(b), (d), (c), (a), (e) A.(b), (d), (c), (a), (e) A.(b), (d), (c), (a), (e)
	B.(b), (d), (c), (e), (a) B.(b), (d), (c), (e), (a) B.(b), (d), (c), (e), (a)
	C.(d), (e), (b), (c), (a) C.(d), (e), (b), (c), (a) C.(d), (e), (b), (c), (a)
	D.(d), (b), (c), (e), (a) D.(d), (b), (c), (e), (a) D.(d), (b), (c), (e), (a)

Answer: C.(d), (e), (b), (c), (a)
C.(d), (e), (b), (c), (a)
C.(d), (e), (b), (c), (a)

163 संतुलन आणि बोधात्मक असहमत ही याची उदाहरणे आहेत

Balance and cognitive dissonance are example of

توازن اور وجدانی ناموزونیت_____ کی مثالیں ہیں ۔

A.बोधात्मक प्रतिपालन
A.Cognitive maintenance
A.وجدانی محافظت

B.बोधात्मक सुसंगतपणा
B.Cognitive consistency
B.وجدانی بستگی

C.बोधात्मक प्रभाव
C.Cognitive influence
C.وجدانی تاثیر

D.मनोवृत्ती सुसंगतपणा
D.Attitude consistency
D.رویّے کی بستگی

Answer: B.बोधात्मक सुसंगतपणा
B.Cognitive consistency
B.وجدانی بستگی

164 सायलेंट व्हॅली इथे स्थित आहे

Silent valley is located in-

خاموش وادی واقع ہے

A.आसाम
A.Assam
A. آسام

B.केरळ
B.Kerala
B. کیرالہ

C.अफ्रीका
C.Africa
C. افریقہ

D.आंध्रप्रदेश
D.Andhra Pradesh
D. آندھرا پردیش

Answer: B.केरळ
B.Kerala
B. کیرالہ

165 निर्देश: मालिका पूर्ण करा

IK, ?, QS, UW

DIRECTION: Complete the series

IK,?, QS, UW

ہدایت اس سرج کو مکمّل کرو

IK, ?, QS, UW

A.OM
A.OM
A.OM

B.MO
B.MO
B.MO

C.NP
C.NP
C.NP

D.PN
D.PN
D.PN

Answer: B.MO
B.MO
B.MO

166	खालीलपैकी शुद्ध शब्द कोणता ?
	A.कुशाग्रबुद्धी
	B.कुशाग्रबुधी
	C.कुशग्रबुद्धी
	D.कुशाग्राबुद्धी
Answer:	A.कुशाग्रबुद्धी

167	"दि ग्रेट इंडीयन नॉव्हेल" या पुस्तकाचे लेखक कोण आहेत? Who is the author of the book “The Great Indian Novel”? دی گریٹ انڈین ناول کے مصنف ہیں :
	A.शशी थरूर A.Shashi Tharoor A.ششی تھرور
	B.अमृता प्रितम B.Amrita Pritam B.امریتا پریتم
	C.अनिता देसाई C.Anita Desai C.انیتا دیسائی
	D.प्रणब मुखर्जी D.Pranab Mukherjee D.پرنب مکھرجی
Answer:	A.शशी थरूर A.Shashi Tharoor A.ششی تھرور

168 सूचना: प्रत्येक प्रश्नाला एक प्रमुख विधानासोबत चार विधाने आहेत ज्यांच्याखाली A, B, C आणि D असे चार विधान आहेत. क्रमवार विधानांची जोडी निवडा ज्यामध्ये प्रथम विधान दुसऱ्या विधानाला सुचवते, आणि दोन्ही विधाने तर्किकदृष्ट्या प्रमुख विधानासोबत निगडित असेल.

जेंव्हा तुम्ही ग्रीन टी पिता, तुमचे चयापचय वाढते
A. तुम्ही ग्रीन टी पिता
B. तुम्ही ग्रीन टी पीत नाही
C. तुमचे चयापचय वाढले
D. तुमचे चयापचय वाढले नाही

DIRECTIONS: Each question has a main statement followed by four statements labelled A, B, C and D. Choose the ordered pair of statements, where the first statement implies the second, and the two statements are logically consistent with the main statement.

When you drink green tea , your metabolism gets up
A. you drink green tea
B. you did not drink green tea
C. your metabolism got up
D. your metabolism did not get up

ہدایت: ہر سوال میں ایک جملہ ہے جسکے بعد چار جملےاے، بی،سی اور ڈی کے نام سے دئے گئے ہیں اسمیں منسلک جوڑیوں کو چنئے۔ جہاں پہلا جملہ دوسرے جملہ کی اور اشارہ کر رہا ہے اور دو جملے منطقی مرکزی بیان کے مطابق ہیں

جب آپ گرین ٹی پیتے ہیں تو آپ کا معدہ تندرست رہتا ہے
Aآپ گرین ٹی پیتے ہیں ۔
Bآپ گرین ٹی نہیں پیتے ۔
Cآپ کا معدہ تندرست ہوا ۔
Dآپ کا معدہ تندرست نہیں ہوا ۔

A.AC
A.AC
A.AC

B.BC
B.BC
B.BC

C.DA
C.DA
C.DA

D.CD
D.CD
D.CD

Answer: A.AC
A.AC
A.AC

169 42 मुलांच्या वर्गात, दिव्या सविसाव्या स्थानावर असून तिच्यापुढे भरती आठव्या स्थानावर आहे. तर शेवटून भारतीचे स्थान कितवे ?

Bharati is 8 ranks ahead of Divya who ranks twenty-sixth in a class of 42. What is Bharati's rank from the last?

بھارتی دویا سے 8 درجہ آگے ہے جسکا درجہ 42 کی کلاس میں چھبیس ہے. بھارتی کہ آخر سے کیا درجہ ہے؟

A.(1) 9 वे
A.9th
A.9th

B.(2) 24 वे
B.24th
B.24th

C.(3) 25 वे
C.25th
C.25th

D.(4) 34 वे
D.34th
D.34th

Answer: C.(3) 25 वे
C.25th
C.25th

170 त्रिकोणाच्या एका बाजूची लांबी 24 मीटर आहे तर त्याची दुसरी बाजू आणि कर्ण यांच्यामधील फरक 8 मी आहे. कर्णाची लांबी काय आहे

The length of one of the side of a triangle is 24 m while difference between its other side and hypotenuse is 8 m. The length of hypotenuse is

ایک مثلث کے ایک طرف کی لمبائی 24 میٹر ہے جبکہ اسکے دوسری طرف اور وتر کے بیچ میں 8 میٹر کی دوری ہے وتر کی دوری ہے

A.28 मी
A.28 m
A.28میٹر

B.32 मी
B.32 m
B.32میٹر

C.40 मी
C.40 m
C.40 میٹر

D.49 मी
D.49 m
D.49 میٹر

Answer: C.40 मी
C.40 m
C.40 میٹر

171 खालीलपैकी अशुद्ध शब्द कोणता ?

A.ठुमरी

B.ठिसुळ

C.ठावका

D.ठाणेदार

Answer: B.ठिसुळ

172 ‘ ऊर बडविणे ‘ या वाक्प्रचाराचा अर्थ काय ?

A.दु:खाने छाती बडवून घेणे

B.छातीठोकपणे सांगणे

C.लाथाबुक्क्या मारणे

D.बाळाला दूध पाजणे

Answer: A.दु:खाने छाती बडवून घेणे

173 सूचना: दोन विधाने आणि त्यानंतर चार निष्कर्ष, I, II, III आणि IV दिले आहेत. ही विधाने सामान्यतः ज्ञात वस्तुस्थितीपेक्षा भिन्न असली तरी सत्य आहेत असे समजा. दिलेल्यापैकी कोणता निष्कर्ष दिलेल्या विधानांवरुन नक्की काढता येऊ शकतो हे तुम्ही ठरवायचे आहे.तुमचे उत्तर सूचित करा.
विधाने:
(a) सर्व खेळाडू सुशिक्षित आहेत
(b) सर्व सुशिक्षित सुसंस्कृत आहेत
निष्कर्ष:
I. सर्व खेळाडू सुसंस्कृत आहेत
II. सर्व सुसंस्कृत व्यक्ति सुशिक्षित आहेत

DIRECTION: Two statements are given following by four conclusions, I, II, III and IV. You have to consider that statements to be true, even if they seem to be at variance from commonly known facts. You are to decide which of the given conclusions can definitely be drawn from the given statements. Indicate your answer.

Statements:
(a) All players are educated.
(b) All educated are cultured

Inferences:
I. All players are cultured.
II. All cultured persons are educated

ہدایات: دو سٹیٹمنٹ جوکہ چار خلاصوں پر مشتمل ہیں .I،II، III اور IV. اپ کو وہ سٹیٹمنٹ درست ماننا ہے، اگرچہ دکہنے میں وہ بہت سارے حقاٰق ست مطبقت رکہتی ہو۔ اپ کو دیے گے خلاصوں میں سے یقینی طور پر اسے اختیار کرنا ہے جو سٹیٹمنٹ سے نکلا ہو. اپنا جواب تلاش کرے.

اظہار بیان:
تمام کہلاڑی پڑے لکہے ہیں
تمام پڑے لکہے مہذب ہیں

خلاصہ:
Iتمام کہلاڑی مہذب ہیں.
IIتمام مہذب لوگ پڑے لکہے ہیں.

A.केवळ I निष्कर्ष निघेल
A.Only inference I follows
A.صرف I خلاصہ درست ہے

B.केवळ II निष्कर्ष निघेल
B.Only inference II follows
B.صرف II خلاصہ درست ہے

C.दोन्ही I आणि II निष्कर्ष निघेल
C.Both inference I and II follows
C.Iاور IIدونو درست ہیں

D.I किंवा II निष्कर्ष निघणार नाही
D.Neither inference I nor II follows
D.نہ I خلاصہ او نہی II درست ہے

Answer: A.केवळ I निष्कर्ष निघेल
A.Only inference I follows
A.صرف I خلاصہ درست ہے

174 सूचना: अर्थपूर्ण परिच्छेद निर्माण करण्यासाठी, खाली दिलेली (P), (Q) (R), (S) आणि (T) ही पाच वाक्ये योग्य अनुक्रमाने पुनर्रचना करा; त्यांनतर खालील प्रश्नांची उत्तर द्या.

P. पशूपेक्षा लहान प्राणी बरा असे म्हणत, शिकारी कुत्र्याची ही धावपळ पाहून शेळीचा कळप त्याचा उपहास करतो.
Q. एके दिवशी, एक मोठा आणि शक्तिशाली शिकारी कुत्रा एका सशाच्या मागे धावत होता.
R. लांबवर पळाल्यानंतर कंटाळून शिकारी कुत्रा शिकार शोधून देतो.
S. आमच्यातला तो फरक आहे."
T. त्याला शिकारी कुत्रा उत्तर देतो : ससा आपल्या जीवासाठी धावत होता आणि मी फक्त खाण्यासाठी धावत होतो.

पुनर्रचना केल्यानंतर खालीलपैकी कोणते वाक्य चौथे असेल?

DIRECTION: Rearrange the following five sentences (P), (Q), (R), (S) and (T) in the proper sequence to form a meaningful paragraph; then answer the questions given below them.
P. A herd of goats watching this mocks the hound, saying that the little one is better than the beast.
Q. One day, a strong and powerful hound was chasing a hare.
R. After running for a long time, the tired hound gives up the hunt.
S. That is the difference between us."
T. To this, the hound responds: "The rabbit was running for its life, I was only running for dinner.

Which of the following should be the FOURTH sentence after rearrangement?

ہدایات: ان پانچ جملوں (P)، (Q)، (R)، (S) اور (T) کو با معنی پیرا بنانے کے لئے دوبارہ ترتیب دیجئے، پھر نیچے دے گئے سوالوں کے جواب دیجئے

P. بکریوں کے کافلا ہلکار کی نکل کرنے لگے ، یہ کہکر کہ ایک چھوٹا والا بیرحم جانور سے اچھا ہے.
Q. ایک دن ، ایک مضبوط اور طاقتور ہلکار خرگوش کہ پیچھا کر رہا تھا.
R. زیادہ دیر تک دھووڈ نے کے بعد، تھکے ہلکار نے شکار چھوڈ دیا.
S. وہی ہم دونو کے درمیان فرق ہے.
T. اسس پر، ہلکار نے جواب دیا: "خرگوش اپنی جان کے لئے بھاگ رہا ہے، میں خالی اپنے کھانے کے لئے بھاگ رہا ہوں.

دوبارہ ترییب دینے کے بعد کون سا جملہ چوتھا ہونا چاہیے؟

A.T
A.T
A.T

B.P
B.P
B.P

C.Q
C.Q
C.Q

D.R
D.R
D.R

Answer: A.T
A.T
A.T

175 सूचना : खालील दिलेल्या प्रश्नामध्ये काही विधाने आणि काही निष्कर्ष आहेत. सामन्यात: ज्ञात तथ्यांपेक्षा ते वेगळे असतील तर दिलेली विधाने तुम्हाला सत्य मानवी लागतील आणि त्यानंतर दिलेल्या विधानाचे अनुकरण दिलेल्यापैकी कोणता निष्कर्ष तार्किकदृष्ट्या करतो ते ठरवा.

विधाने :
M > A ≥ B = Q ≤ P < J ≤ Y
निष्कर्ष :
I. B < Y
II. A ≥P

DIRECTIONS: In the question given below, there are few statements followed by few conclusions. You have to take the given statements to be true even if they seem to be at variance with commonly known facts and then decide which of the given conclusion logically follow(s) from the given statements.

Statements:
M > A ≥ B = Q ≤ P < J ≤ Y
Conclusions:
I. B < Y
II. A ≥ P

ہدایات: مندرجہ ذیل سوال میں، کچھ بیانات کے بعد کچھ نتائج موجود ہیں. اگر آپ کو عام طور پر جانے جاتے حقائق کے ساتھ بھی متغیر ہونے لگے تو بھی آپ دئے گئے بیانات دماغ میں رکھیں اور پھر اس بات کا فیصلہ کریں کہ ذیل میں دیا گیا کونسا نتیجہ منطقانہ طور پر دیے گئے بیانات کی پیروی کرتا ہے.

بیانات:
M > A ≥ B = Q ≤ P < J ≤ Y
نتائج:
I .B < Y
II .A ≥P

A.तर फक्त I निष्कर्ष खरा आहे
A.If only conclusion I is true
A.اگر صرف I نتیجہ درست ہے

B.तर I व II हे दोन्हीही निष्कर्ष खरे नाहीत
B.If neither conclusion I nor II is true
B.اگر I اور II نتائج میں سے کوئی بھی درست نہیں

C.तर फक्त II निष्कर्ष खरा आहे
C.If only conclusion II is true
C.اگر صرف نتیجہ II درست ہے

D.तर I किंवा II यापैकी एक निष्कर्ष खरा आहे
D.If either conclusion I or II is true
D.اگر I اور II نتائج میں سے ایک درست ہے

Answer: A.तर फक्त I निष्कर्ष खरा आहे
A.If only conclusion I is true
A.اگر صرف I نتیجہ درست ہے

176 निर्देश: खालील व्यवस्था काळजीपूर्वक वाचा आणि खाली दिलेल्या प्रश्नांची उत्तरे द्या:

B 5 R 1@E K 4 F 7©DAM 2 P 3%9 H I W 8*6 U J$V Q#

उपरोक्त व्यवस्थेच्या डावी कडून सतराव्या घटकाच्या डाव्या बाजूचा सातवा घटक कोणता?

DIRECTIONS: Study the following arrangement carefully and answer the questions given below:

B 5 R 1@E K 4 F 7©DAM 2 P 3%9 H I W 8*6 U J$V Q#

Which of the following is the seventh to the left of the seventeenth from the left end of the above arrangement?

ہدایت نیچے دی گی حرف نشان اور نمبرس کی ترتیب کو پڑھئے اور سوالات کا جواب دیجئے

B 5 R 1@E K 4 F 7©DAM 2 P 3%9 H I W 8*6 U J$V Q#

اپری ترتیب میں الٹے ہاتھ سے ستارھوے حرف کے الٹے ہاتھ کو ساتوا حرف کیا ہوگا ؟

A.7
A.7
A.7

B.W
B.W
B.W

C.*
C.*
C.*

D.4
D.4
D.4

Answer: A.7
A.7
A.7

177 नोबेल पुरस्कार _____ मध्ये दिला जातो

The Nobel Prize is given in-

نوبل پرائز دیا جاتا ہے :

A.नॉर्वे
A.Norway
A.ناروے میں

B.स्विडन
B.Sweden
B.سویڈن میں

C.स्वित्झर्लँड
C.Switzerland
C.سویزرلینڈ میں

D.फिनलँड
D.Finland
D.فن لینڈ میں

Answer: B.स्विडन
B.Sweden
B.سویڈن میں

178 $\sqrt[2]{256} = (4)^{?}$

A. 4

B. 1

C. 3

D. 2

Answer: D. 2

179 कदाचित शाळेत प्रतिभावान मुलाची शिक्षकां कडून उपेक्षा होण्याचे मूलभूत करण आहे

Probably the basic cause underlying the teacher's relative neglect of the gifted child in school is—

ممکنہ طور پر اسکول میں استاد کا تحفہ شدہ بچے کو نظرانداز کا بنیادی سبب ہے—

A.प्रतिभावान मुलाच्या खरे क्षमतेची जाणीव होण्यास शिक्षकाचे अपयश
A.The teacher's failure to realize the gifted child's true ability
A.تحفہ شدہ بچے کی حقیقی صلاحیت کا احساس کرنے میں استاد کی ناکامی

B.प्रतिभावान मुला कडून हवी असलेली मदत मदत घेण्यास व स्वीकारण्यास रुची नसणं
B.The gifted child's reluctance to seek and accept help
B.مدد کی تلاش اور قبول کرنے میں تحفہ شدہ بچے کی جھجک

C.प्रतिभासंपन्न मुलाशी वागण्यात शिक्षकांची कमतरता
C.The teacher's feelings of inadequacy in dealing with the gifted
C.تحفے کے ساتھ نمٹنے میں استاد کے ناکافی ہونے کے احساسات

D.प्रतिभावान मुलाच्या स्वत: च्या बाजूने मिळविण्याची क्षमता
D.The gifted child's ability to get along on his own
D.تحفہ شدہ بچے کی اپنی مدد آپ کرنے کی صلاحیت ہے

Answer: D.प्रतिभावान मुलाच्या स्वत: च्या बाजूने मिळविण्याची क्षमता
D.The gifted child's ability to get along on his own
D.تحفہ شدہ بچے کی اپنی مدد آپ کرنے کی صلاحیت ہے

180 Out of the given options, choose the one which is the correct passive voice of the sentence given below.
Roses smell sweet.

A.Roses are smelling sweet.

B.Roses are sweet smelling when someone smells.

C.Roses are sweet when smelt.

D.Roses are sweetest when we smell.

Answer: C.Roses are sweet when smelt.

181

दिलेल्या आकृतीमध्ये OM ⊥ AB, वर्तुळाची त्रिज्या 5 सेंमी आहे आणि जीवेची लांबी AB = 8 सेंमी आहे. OM चे माप काढा.

In the given figure OM ⊥ AB, radius of the circle is 5 cm and length of the chord AB = 8 cm. Find the measure of OM.

دی گئی شکل AB ⊥ OM میں، دائرے کی رداس 5 سینٹی میٹر اور AB = 8سینٹی میٹر کی لمبائی ہے۔ OMکی پیمائش تلاش کریں۔

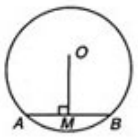

A. 3 सेंमी
3 cm
3 سینٹی میٹر

B. 2.4 सेंमी
2.4 cm
2.4 سینٹی میٹر

C. 2 सेंमी
2 cm
2 سینٹی میٹر

D. 6 सेंमी
6 cm
6 سینٹی میٹر

Answer: A. 3 सेंमी
3 cm
3 سینٹی میٹر

182

सूचना: दिलेल्या पर्यायांमधून श्रेणी पूर्ण करणारी योग्य आकृती निवडा.

DIRECTIONS: Complete the series by choosing right figure from the given choices.

ہدایات: دیئے گئے اختیارات میں صحیح شکل کا انتخاب کر کے سیریز کو مکمل کیجیئے۔

Question Figures

प्रश्न आकृती

اصل شکل

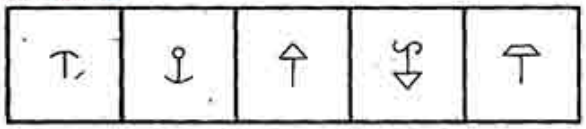

Answer Figures

उत्तरासाठी पर्यायी आकृत्या

جوابی شکل

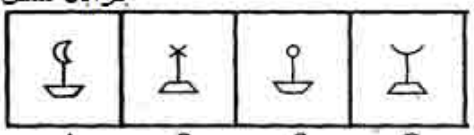

A B C D

A. (A)

B. (B)

C. (C)

D. (D)

Answer: A. (A)

183

Fill in the blank with the correct article.
Ann blew a few notes on _____trumpet.

A.the

B.a

C.an

D.No article required

Answer: A.the

184

निर्देश: खालील प्रश्नांमध्ये प्रश्न चिन्हाच्या (?) जागी कोणते अंदाजे मूल्य यायला हवे? (तुम्ही अचूक मूल्य काढण्याचे अपेक्षित नाही).

DIRECTIONS: What approximate value should come in place of the question mark (?) in the following questions? (You are not expected to calculate the exact value)

ہدایات: مندرجہ ذیل سوال میں سوال کا نشان (?) کی جگہ پر کون سا تخمینہ ویلیو آئے گا -
(آپ کو صحیح ویلیو نکالنے کی ضرورت نہیں ہے)

$(12.01)^2 \times \sqrt{725} = ?$

A. 4000

B. 4120

C. 3800

D. 3900

Answer: D. 3900

185

शिक्षक हे 'मित्र, मार्गदर्शक आणि तत्वज्ञानाचे अभ्यासक' या वाक्यांने गौरवले आहे कारण

The teacher has been glorified by the phrase—'Friend, Philosopher and Guide' because—

استاد 'دوست، فلسفی اور گائیڈ' کے ذریعہ استاد کی تعریف کی گئی ہے کیونکہ -

A.समाजाच्या संदर्भात त्यांना या सर्व महत्त्वपूर्ण भूमिका बजावाव्या लागतात
A.He has to play all these vital roles in context of the society
A.انہیں معاشرے کے تناظر میں یہ تمام اہم کردار ادا کرنا پڑتا ہے

B.मानवजातीच्या उच्च मूल्या ते वर्ग खोलीत बसलेल्या तरुणांमधे भरतात
B.He transfuses the high values of the humanity into young ones sitting in the class-room
B.وہ انسانیت کی اعلی اقدار کو کلاس روم میں بیٹھے نوجوانوں میں منتقل کرتا ہے

C.ते देशाचे महान सुधारक आणि देशभक्तीपर रक्षणकर्ता आहेत
C.He is the great reformer and patriotic savior of a nation
C.وہ قوم کا عظیم اصلاح پسند اور وطن پرست نجات دہندہ ہے

D.वरील सर्व विधाने खरी आहेत
D.All the above statements are true.
D.مذکورہ تمام بیانات سچ ہیں.

Answer: B.मानवजातीच्या उच्च मूल्या ते वर्ग खोलीत बसलेल्या तरुणांमधे भरतात
B.He transfuses the high values of the humanity into young ones sitting in the class-room
B.وہ انسانیت کی اعلی اقدار کو کلاس روم میں بیٹھے نوجوانوں میں منتقل کرتا ہے

186 ‘ तो निळासावळा झरा संथ वाहतो आहे.’ या वाक्यातील विशेषण ओळखा.

A.निळासावळा

B.झरा

C.संथ

D.वाहतो

Answer: A.निळासावळा

187 जेव्हा आपण आपल्या वर्गात वेगळी एकटी मुल बघता तेव्हा आपण काय समजता

What would you assume when you perceive an isolated child in your class?

جب آپ اپنی کلاس میں الگ بچے کو سمجھتے ہو تو آپ کیا خیال کریں گے؟

A.हा निराशा आणि संघर्ष भा बळी आहे
A.He is pray of frustration and conflicts
A.وہ مایوسی اور تنازعہ کی دعا کررہا ہے

B.त्याचा समाजीकरण अपुरा आहे
B.He has inadequate socialization
B.اس کی معاشرتی صلاحیت ناکافی ہے

C.तो दिवस स्वप्न पाहतोय
C.He is day – dreaming
C.وہ دن میں - خواب دیکھ رہا ہے

D.तो अपराधी आहे
D.He is delinquent
D.وہ غافل ہے

Answer: B.त्याचा समाजीकरण अपुरा आहे
B.He has inadequate socialization
B.اس کی معاشرتی صلاحیت ناکافی ہے

188 मंडूक डिंग कश्याच्या छोट्या पिल्लाला म्हणतात

Tadpoles are young ones of

ٹیڈپولس بچے ہوتے ہیں

	A.बेडूक A.Frog A. مینڈک
	B.मासा B.Fish B. مچھلی
	C.टारपीडो C.Torpedo C. تارپیڈو
	D.ध्रुवीय अस्वल D.Polar Bears D. پولر ریچھ
Answer:	A.बेडूक A.Frog A. مینڈک
189	पुढील जोडशब्द पूर्ण करा . ‘ न्याय ----------’
	A.अन्याय
	B.निवाडा
	C.संगत
	D.यापैकी सर्व
Answer:	D.यापैकी सर्व

190 सूचना: अर्थपूर्ण परिच्छेद निर्माण करण्यासाठी, खाली दिलेली (P), (Q) (R), (S) आणि (T) ही पाच वाक्ये योग्य अनुक्रमाने पुनर्रचना करा; त्यांनतर खालील प्रश्नांची उत्तर द्या.

P. पशूपेक्षा लहान प्राणी बरा असे म्हणत, शिकारी कुत्र्याची ही धावपळ पाहून शेळीचा कळप त्याचा उपहास करतो.
Q. एके दिवशी, एक मोठा आणि शक्तिशाली शिकारी कुत्रा एका सशाच्या मागे धावत होता.
R. लांबवर पळाल्यानंतर कंटाळून शिकारी कुत्रा शिकार शोधून देतो.
S. आमच्यातला तो फरक आहे."
T. त्याला शिकारी कुत्रा उत्तर देतो : ससा आपल्या जीवासाठी धावत होता आणि मी फक्त खाण्यासाठी धावत होतो.

पुनर्रचना केल्यानंतर खालीलपैकी कोणते वाक्य पहिले असेल?

DIRECTION: Rearrange the following five sentences (P), (Q), (R), (S) and (T) in the proper sequence to form a meaningful paragraph; then answer the questions given below them.
P. A herd of goats watching this mocks the hound, saying that the little one is better than the beast.
Q. One day, a strong and powerful hound was chasing a hare.
R. After running for a long time, the tired hound gives up the hunt.
S. That is the difference between us."
T. To this, the hound responds: "The rabbit was running for its life, I was only running for dinner.

Which of the following should be the FIRST sentence after rearrangement?

ہدایات: ان پانچ جملوں (P)، (Q)، (R)، (S) اور (T) کو با معنی پیرا بنانے کے لئے دوبارہ ترتیب دیجئے، پھر نیچے دے گئے سوالوں کے جواب دیجئے

P. بکریوں کے کافلا ہلکار کی نکل کرنے لگے ، یہ کہکر کہ ایک چھوٹا والا بیرحم جانور سے اچھا ہے.
Q. ایک دن ، ایک مضبوط اور طاقتور ہلکار خرگوش کہ پیچھا کر رہا تھا.
R. زیادہ دیر تک دھووڈ نے کے بعد، تھکے ہلکار نے شکار چھوڈ دیا.
S. وہی ہم دونو کے درمیان فرق ہے.
T. اسس پر، ہلکار نے جواب دیا: "خرگوش اپنی جان کے لئے بھاگ رہا ہے، میں خالی اپنے کھانے کے لئے بھاگ رہا ہوں.

دوبارہ ترییب دینے کے بعد کون سا جملہ پہلے ہونا چاہیے؟

A.Q
A.Q
A.Q

B.R
B.R
B.R

C.S
C.S
C.S

D.T
D.T
D.T

Answer: A.Q
A.Q
A.Q

191 **सूचना:** खालील प्रश्नात, दिलेल्या पर्यायांमधून नातेसंबंध सांगणारी आकृती निवडा.

DIRECTIONS: In the question below, select the related figure from the given alternatives.

ہدایات: نیچے دیئے گئے سوال میں، دیئے گئے متبادلات میں سے متعلق متبادل چنئے۔

Problem Figures:



(A) (B) (C) (D)

Answer Figures:



(1) (2) (3) (4)

A. 1

B. 2

C. 3

D. 4

Answer: A. 1

192 भारतामध्ये आर्थिक वर्ष _____ या महिन्यापासून सुरू होते –

The financial year in India starts from the month of –

بھارت میں مالیاتی سال شروع ہوتا ہے :

A.फेब्रुवारी
A.February
A.فروری سے

B.मार्च
B.March
B.مارچ سے

C.एप्रिल
C.April
C.اپریل سے

For More Info And Videos About TAIT-Exam Syllabus And Other Exam Visit My Channel
TAIT च्या 30 प्रश्नपत्रिका PDF Available Request 9765226781
BADSHAHimp
WWW.YouTube.com/BADSHAHimp
Subscribe My Channel

D.मे
D.May
D.مئی سے

Answer: C.एप्रिल
C.April
C.اپریل سے

193 2 मार्कर पेनची किंमत रू. 240 आहे आणि 20 सेलो पेनची किंमत रू.160 आहे. सेलो पेनच्या किंमतीचे मार्कर पेनच्या किंमतीशी असलेले गुणोत्तर शोधा.

Cost of 2 marker pens are Rs. 240 and cost of 20 cello pens are Rs. 160. Find the ratio of the cost of a cello pen to the cost of a marker pen?

2 مارکر قلم کی قیمت روپیہ 240 اور 20 سیلو قلم کی قیمت روپیہ 160 ہے۔ ایک مارکر قلم کے مقابلہ میں سیلو قلم کی قیمت کا تناسب معلوم کریں؟

A.1:20
A.1:20
A.1:20

B.1:15
B.1:15
B.1:15

C.15:2
C.15:2
C.15:2

D.20:1
D.20:1
D.20:1

Answer: B.1:15
B.1:15
B.1:15

194 विजेच्या बल्बची माळ याने तयार केली जाते:

The filament of an Electric Bulb is made up of:

ایک الیکٹرک بلب کا فیلامینٹ _____ سے بنا ہوتا ہے۔

For More Info And Videos About TAIT-Exam Syllabus And Other Exam Visit My Channel
TAIT च्या 30 प्रश्नपत्रिका PDF Available Request 9765226781
BADSHAHimp
WWW.YouTube.com/BADSHAHimp
Subscribe My Channel

A.निक्रोम
A. Nichrome
A.نیکروم

B.तांबे
B. Copper
B.تانبا

C.ड्युरालियम
C. Duralium
C.ڈورالیم

D.टंगस्टन
D. Tungsten
D.ٹنگسٹین

Answer: D.टंगस्टन
D. Tungsten
D.ٹنگسٹین

195 संशोधनाने दर्शविले आहे की, एकूण अभ्यास वेळेची टक्केवारी जी वाचन करण्यास निपुण असू शकते कारण परत वाचन चा विरोध हा उच्च म्हणून असू शकतो

Research has shown that the percentage of the total study time which could profitably be devoted to recitation as opposed to rereading could be as high as—

تحقیق سے پتہ چلتا ہے کہ کل مطالعہ کے وقت کا فی صد حصہ جسے پڑھنے کے برعکس مطالعہ کے لئے وقف کیا جا سکتا ہے وہ زیادہ سے زیادہ ہو سکتا ہے—

A.20 टक्के
A.20 per cent
A.20 فی صد

B.40 टक्के
B.40 per cent
B.40 فی صد

C.60 टक्के
C.60 per cent
C.60 فی صد

D.80 टक्के
D.80 per cent
D.80 فی صد

Answer: D.80 टक्के
D.80 per cent
D.80 فی صد

196 दोन सपाट आरसे एकमेकांना समांतर ठेवले तर, जे प्रतिबिंब तयार होतील त्यांची संख्या इतकी असेल:

Two plane mirrors are kept parallel to each other, the number of images formed will be:

دو پلین آئنے ایک دوسرے کے متوازی رکھے گئے ہیں، اس میں آنے والی تصاویر کی تعداد ہوگی:

A.2
A.2
A.2

B.4
B.4
B.4

C.6
C.6
C.6

D.अगणित
D. Infinite
D.لامحدود

Answer: D.अगणित
D. Infinite
D.لامحدود

197 जैवक्षेत्र प्रतिबंधाचे उद्देश्य आहे-

The objective of Biosphere Reserve is-

بایواسفئر ریزرو Biosphere Reserve کا مقصد ہے-

A.वन्यक्षेत्रातील वनस्पती आणि प्राण्यांचे संरक्षण करणे
A.Preservation of flora and fauna of forest land
A. پودوں اور جنگلاتی زمین کے پودوں کے تحفظ

B.वन्य उत्पादनाचे संशोधन आणि विकास
B.Research and Development of forest product
B. تحقیق اور جنگل کی مصنوعات کی ترقی

C.कृषी उत्पादनाचे संशोधन आणि विकास
C.Research and Development of agro- product
C. ریسرچ اور زراعتی- مصنوعات کی ترقی

For More Info And Videos About TAIT-Exam Syllabus And Other Exam Visit My Channel
TAIT च्या 30 प्रश्नपत्रिका PDF
BADSHAHimp Available Request 9765226781
WWW.YouTube.com/BADSHAHimp
Subscribe My Channel

D.वरीलपैकी सर्व
D.All of the above
D. مندرجہ بالا میں سے سب

Answer:
D.वरीलपैकी सर्व
D.All of the above
D. مندرجہ بالا میں سے سب

198

4 मे, 1886 रोजी रविवार आहे, 4 मे, 1887 रोजी काय वार असेल?

Sunday falls on 4th May, 1886 what will be the day on 4th May, 1887?

4 مئ 1886 کو اتوار ہے۔ تو 4 مئ 1887 کونسا دن ہوگا؟

A.सोमवार
A.Monday
A.پیر

B.मंगळवार
B.Tuesday
B.منگل

C.गुरूवार
C.Thursday
C.جمعرات

D.शनिवार
D.Saturday
D.سنیچر

Answer:
A.सोमवार
A.Monday
A.پیر

199

प्रतिभासंपन्न विद्यार्थी असा असेल

A gifted student will be

تحفہ والا طالب علم ہوگا

A.आपल्या गरजांबाबत आग्रही नसणे
A.non-assertive of their needs
A.اپنی ضرورت پر زیادہ زور نہ دینے والا

For More Info And Videos About TAIT-Exam Syllabus And Other Exam Visit My Channel
TAIT च्या 30 प्रश्नपत्रिका PDF Available Request 9765226781
BADSHAHimp
WWW.YouTube.com/BADSHAHimp
Subscribe My Channel

	B.शिक्षकांवर निर्भर नसलेला B.independent of leaches B.تقطیر سے آزاد
	C.स्वभावाने अंतर्मुख C.introvert in nature C.فطرتاً دروں بین
	D.स्वतंत्रपणे निर्णय घेणारी D.independent in their judgment D.اپنے فیصلہ میں آزاد
Answer:	D.स्वतंत्रपणे निर्णय घेणारी D.independent in their judgment D.اپنے فیصلہ میں آزاد

200	पिनरायी विजयन हे _____ चे मुख्य मंत्री आहेत – Pinarayi Vijayan is the Chief Minister of – بنارائی وجین وزیر اعلی ہیں :
	A.कर्नाटक A.Karnataka A.کرناٹک
	B.तेलंगणा B.Telengana B. تیلنگانہ
	C.तामिळनाडू C.Tamil Nadu C.تمل ناڈو
	D.केरळ D.Kerala D.کیرالہ
Answer:	D.केरळ D.Kerala D.کیرالہ

For More Info And Videos About TAIT-Exam Syllabus And Other Exam Visit My Channel
TAIT च्या 30 प्रश्नपत्रिका PDF
BADSHAHimp Available Request 9765226781
WWW.YouTube.com/BADSHAHimp
Subscribe My Channel

Question Paper Title : TAIT_PAPER_9

Date of Exam : 2017-12-16 09:00:00.0

1	खालीलपैकी अशुद्ध शब्द कोणता ?
	A.ऐक
	B.दोन
	C.तिन
	D.चार
Answer:	C.तिन

2	Choose the word which is most similar in meaning to the given word. FORTUNATE
	A.Lucky
	B.Wretched
	C.Miserable
	D.Unlucky
Answer:	A.Lucky

3	‘सूर्य’ या शब्दाचा समानार्थी शब्द कोणता ?
	A.मित्र
	B.शत्रू
	C.उजेड
	D.यापैकी नाही
Answer:	A.मित्र

For More Info And Videos About TAIT-Exam Syllabus And Other Exam Visit My Channel
BADSHAHimp SubScribe Like & Share YouTube WWW.YouTube/BADSHAHimp

4	जर $\frac{m}{4}-\frac{m-3}{6}=2$, m चे मूल्य काढा. If $\frac{m}{4}-\frac{m-3}{6}=2$, find the value of m. اگر $\frac{m}{4}-\frac{m-3}{6}=2$ تو m کی قیمت معلوم کریں۔
	A. 15
	B. 19
	C. 25
	D. 18
Answer:	D. 18
5	खालीलपैकी शुद्ध शब्द कोणता ?
	A.शारिरिक
	B.शारीरीक
	C.शारीरिक
	D.शारिरीक
Answer:	C.शारीरिक
6	$\sqrt{4761}$ चे मूल्य आहे: $\sqrt{4761}$ is equal to: $\sqrt{4761}$ مساوی ہے:
	A. 59
	B. 69
	C. 67
	D. 60
Answer:	B. 69

7	खालीलपैकी अशुद्ध वाक्य कोणते ?
	A.शाळा मातेप्रमाणे आहे.
	B.आमच्या गावातील पाटील हे कर्णासारखे दानशूर आहेत.
	C.काय वसंतराव, तुम्हाला सुपारी लागते का ?
	D.एकटा माणूस हे अख्खं शहर कसं वाचवू शकेल !
Answer:	D.एकटा माणूस हे अख्खं शहर कसं वाचवू शकेल !

8	_____ आणि_____ हे दारिद्र्याचे अतिरिक्त वैशिष्टे आहेत _____ & _____ are additional features of poverty _____ اور _____ غریبی کی اضافی خصوصیات ہیں۔
	A.भेदभाव आणि सामाजिक तोटा A.Discrimination & Social disadvantage A.بھید بھاؤ اور سماجی پسماندگی
	B.फसवणूक आणि सामाजिक तोटा B.Deprivation & Social disadvantage B.محرومی اور سماجی پسماندگی
	C.अनागरीकरण आणि सामाजिक तोटा C.Urbanization & Social disadvantage C.شہرکاری اور سماجی پسماندگی
	D.यापैकी एकही नाही D.None of these D. ان میں سے کچھ نہیں
Answer:	A.भेदभाव आणि सामाजिक तोटा A.Discrimination & Social disadvantage A.بھید بھاؤ اور سماجی پسماندگی

For More Info And Videos About TAIT-Exam Syllabus And Other Exam Visit My Channel
BADSHAHimp SubScribe Like & Share YouTube WWW.YouTube/BADSHAHimp

9	सूचना: दिलेल्या पर्यायांमधून वेगळे ते बाहेर काढा. DIRECTIONS: Find the odd one out from the given alternatives. سمت: دیے گئے متبادل میں سے بے جوڑ کو تلاش کرو۔
	A.हृदय A.Heart A.دل
	B.डोळे B.Eyes B.آنکھیں
	C.कान C.Ear C.کان
	D.गाल D.Cheek D.گال
Answer:	A.हृदय A.Heart A.دل

10	पुढील म्हण पूर्ण करा - ‘ऐकावे --------- , करावे मनाचे.’
	A.थोरांचे
	B.गुरुचे
	C.सर्वांचे
	D.जनाचे
Answer:	D.जनाचे

For More Info And Videos About TAIT-Exam Syllabus And Other Exam Visit My Channel
BADSHAHimp SubScribe Like & Share YouTube WWW.YouTube/BADSHAHimp

11 सूचना: खालील प्रश्नांमध्ये दिलेल्या पर्यायांमधून संबंधित अक्षर/शब्द/संख्या निवडा.

5 : 36 :: 6 : ?

DIRECTIONS: In the following question, select the related letter/word/number from the given alternatives.

5 : 36 :: 6 : ?

سمت: مندرجہ ذیل سوال میں، دیے گئے متبادل سے متعلقہ حرف/لفظ/نمبر منتخب کریں۔

5 : 36 :: 6 : ?

A.48
A.48
A.48

B.50
B.50
B.50

C.43
C.43
C.43

D.56
D.56
D.56

Answer: C.43
C.43
C.43

For More Info And Videos About TAIT-Exam Syllabus And Other Exam Visit My Channel
BADSHAHimp SubScribe Like & Share YouTube WWW.YouTube/BADSHAHimp

12 सूचना: खाली दिलेल्या विधान (A) आणि कारण (R) साठी, खालील पैकी योग्य पर्याय निवडा:

विधान (A): बेल्जियम हिऱ्यांशी संबंधित आहे.
कारण (R): अँटवर्पमधून ७५ टक्क्यांपेक्षा जास्त जागतिक कच्चे हिरे पार होतात.

DIRECTION: For the Assertion (A) and Reason (R) given below, choose the correct alternative from the following:
Assertion (A): Belgium is associated with diamonds.
Reason (R): More than 75 percent of world rough diamonds pass through Antwerp.

ہدایت: نیچے دئیے گئے اسرشن (A) اور وجہ (R) کے لئے، مندرجہ ذیل میں سے صحیح متبادل منتخب کریں:

اسرشن (A): بیلجیم ہیروں کے ساتھ وابستہ ہے۔
وجہ (R): دنیا بھر میں 75 فیصد سے زیادہ ہیرے اینٹورپ سے گزرتے ہیں۔

A.दोन्ही (A) आणि (R) सत्य आहेत आणि (R) (A) च योग्य स्पष्टीकरण आहे
A.Both (A) and (R) are true and (R) is the correct explanation of (A)
A. (A) اور (R) دونوں صحیح ہیں اور (R) (A) کی درست وضاحت ہے

B.दोन्ही (A) आणि (R) खरे आहेत, परंतु (R) (A) च योग्य स्पष्टीकरण नाही
B.Both (A) and (R) are true, but (R) is not the correct explanation of (A)
B. (A) اور (R) دونوں صحیح ہیں، لیکن (R) (A) کی درست وضاحت نہیں ہے

C.(A) सत्य आहे, परंतु (R) खोटे आहे
C.(A) is true, but (R) is false
C. (A) صحیح ہے، لیکن (R) غلط ہے

D.(A) खोटे आहे, परंतु (R) सत्य आहे
D.(A) is false, but (R) is true
D. (A) غلط ہے، لیکن (R) صحیح ہے

Answer: A.दोन्ही (A) आणि (R) सत्य आहेत आणि (R) (A) च योग्य स्पष्टीकरण आहे
A.Both (A) and (R) are true and (R) is the correct explanation of (A)
A. (A) اور (R) دونوں صحیح ہیں اور (R) (A) کی درست وضاحت ہے

For More Info And Videos About TAIT-Exam Syllabus And Other Exam Visit My Channel
BADSHAHimp SubScribe Like & Share YouTube WWW.YouTube/BADSHAHimp

13 सूचना: प्रत्येक प्रश्नाला एक प्रमुख विधानासोबत चार विधाने आहेत ज्यांच्याखाली A, B, C, आणि D असे चार विधान आहेत. क्रमवार विधानांची जोडी निवडा ज्यामध्ये प्रथम विधान दुसऱ्या विधानाला सुचवते, आणि दोन्ही विधाने तर्किकदृष्ट्या प्रमुख विधानासोबत निगडित असेल.

जर तुम्ही कर भरले नाही, तर तुम्हाला कोणत्याही सुविधेचा लाभ मिळणार नाही.
A. तुम्ही कर भरले नाही
B. तुम्ही कर भरले
C. तुम्हाला सुविधा मिळाल्या
D. तुम्हाला सुविधा मिळाल्या नाही

DIRECTIONS: Each question has a main statement followed by four statements labelled A, B, C and D. Choose the ordered pair of statements, where the first statement implies the second, and the two statements are logically consistent with the main statement.

If you do not pay taxes ,you wont get any facility .
A. you did not pay taxes
B. you paid taxes
C. you got facility .
D. you did not get any facility .

ہدایت: ہر سوال میں ایک جملہ ہے جسکے بعد چار جملےاے، بی،سی اور ڈی کے نام سے دئے گئے ہیں اسمیں منسلک جوڑیوں کو چنئے۔ جہاں پہلا جملہ دوسرے جملہ کی اور اشارہ کر رہا ہے اور دو جملے منطقی مرکزی بیان کے مطابق ہیں

جب آپ ٹکیس نہیں دیتے تو آپ کو کوئی سہولت نہیں ملتی۔
Aآپ نے ٹیکس نہیں دیا ۔
Bآپ نے ٹیکس دیا ۔
C۔آپ کو سہولت ملی ۔
D۔آپ کو سہولت نہیں ملی ۔

A.AD
A.AD
A.AD

B.BC
B.BC
B.BC

C.DB
C.DB
C.DB

D.CD
D.CD
D.CD

Answer: A.AD
A.AD
A.AD

14

सूचना: दिलेल्या चारांपैकी वेगळी (असंबद्ध) असणारी आकृती शोधून काढा.

DIRECTIONS: Find the odd from the given four figures.

ہدایات: دیئے گئے چارشکلوں میں طاق کونسی

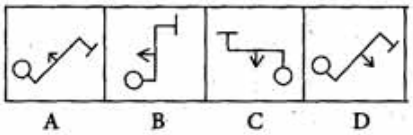

A. (A)

B. (B)

C. (C)

D. (D)

Answer: D. (D)

15 राम, एक हुशार विद्यार्थी, वर्गातील इतर विद्यार्थ्यांच्या चुका आणि धीम्या गतीमुळे उघड उघड उतावळा होत असतो आणि त्याच्या वाटणीच्या प्रश्नांपेक्षा कितीतरी अधिक प्रश्नांची उत्तरे देऊ इच्छितो. त्याच्या शिक्षकाने — केले पाहीजे

Rama, a bright pupil, is openly impatient of the errors and slowness of other students in the class and wishes to answer much more than his share of questions. His teacher should—

راما، ایک ذہین طالب علم، کلاس میں دوسرے طالب علموں کی غلطی اور سستی کے بارے مین بے صبر ہے اور اپنے حصے کےسوالات سے کہیں زیادہ جواب دینے کی خواہش ہے. اس کے استاد کو چاہیئے -

A.त्याला फक्त त्याच्या वाटणीचे प्रश्न आणि ते जास्त कठीण असलेले असे विचारले पाहीजेत
A.Ask him only his share and those quite hard questions
A.اس سے صرف اس کے حصے کے اور کافی مشکل سوالات پوچھیں

B.त्याला जितक्या प्रश्नांची उत्तरे देण्याची इच्छा आहे तेवढे देण्यास अनुमती द्यावी ज्यामुळे वर्गाचे काम लवकर होईल
B.Allow him to answer as many questions as he wants in order to expedite classwork
B.کلاس کے کام کو تیز کرنے کے لئے اسے اس کی چاہت کے مطابق بہت سے سوالات کا جواب دینے کی اجازت دیں

C.त्याला खाजगीत वर्ग सुरू होण्यापूर्वी सांगावे की त्याचे वागणे अयोग्य आहे
C.Tell him privately before class that he is behaving improperly
C.اسے کلاس سے نجی طور پر بتائیں کہ وہ غلط طریقے سے برتاو کررہا ہے

D.त्याला कठीण प्रश्न विचारावे ज्याची त्याला उत्तरे देता येणार नाहीत व याची जाणीव करून द्यावी की तो तेवढा हुशार नाही आहे
D.Make him realize that he is not so smart by asking him difficult questions that he cannot answer.
D.-مشکل سوالات، جن کا وہ جواب نہ دے سکے، پوچھ کر اسے احساس دلائیں کہ وہ بہت تیز نہیں ہے

For More Info And Videos About TAIT-Exam Syllabus And Other Exam Visit My Channel
BADSHAHimp SubScribe Like & Share WWW.YouTube/BADSHAHimp

Answer: C.त्याला खाजगीत वर्ग सुरू होण्यापूर्वी सांगावे की त्याचे वागणे अयोग्य आहे
C.Tell him privately before class that he is behaving improperly
C.اسے کلاس سے نجی طور پر بتائیں کہ وہ غلط طریقے سے برتاو کررہا ہے

16 निर्देश: खालीदिलेल्या अक्षराच्या क्रमात काही अक्षरे गहाळ केली आहेत ते त्या क्रमाने खाली दिलेल्या पर्यायांपैकी एक आहे

b _ aba_bab _ aba_ba

DIRECTIONS: In each of the following letter series, same of the letters are missing which are given in that order as one of the alternatives below it.

b _ aba_bab _ aba_ba

دایت جیل کے حرف سرج میں کوئی حرف گمشدہ ہے آپکو انکی شناخت جیل کے اختیارات سے کرنی ہے

b _ aba_bab _ aba_ba

A.baaa
A.baaa
A.baaa

B.abba
B.abba
B.abba

C.abab
C.abab
C.abab

D.baaa
D.baaa
D.baaa

Answer: C.abab
C.abab
C.abab

17 सूचना: माहितीचा काळजीपूर्वक अभ्यास करा आणि दिलेल्या प्रश्नाचे उत्तर द्या.
A, B, C, D, E, F, G आणि H हे आठ लोक एका गोलाकार टेबलाभोवती बसलेले असून मध्यभागी बघत आहेत व एकमेकांपासून समान अंतरावर आहेत परंतु त्याच क्रमाने असतील असे नाही. A, Cच्या डावीकडून तिसरा बसलेला आहे. केवळ एक व्यक्ती A आणि G च्या मध्ये बसते, E हा F च्या उजवी कडून दुसऱ्या जागेवर बसतो. F हा A किंवा G चा तत्काळ शेजारी नाही. केवळ एक व्यक्ती B आणि E च्या मध्ये बसतो. E हा D चा तत्काळ शेजारी नाही.
G च्या उजवीकडे कोण बसले आहे?

DIRECTIONS: Study the information carefully and answer the question given.
Eight people A, B, C, D, E, F, G and H are sitting around a circular table facing the centre, with equal distance between each other but not necessarily in the same order. A sits third to the left of C.
Only one person sits between A and G. E sits second to the right of F. F is neither an immediate neighbour of A nor G. Only one person sits between B and E. E is not an immediate neighbour of D.
Who is sitting to the right of G?

ہدایات: معلومات کو دھیان سے پڑھیں اور دیے گئے سوالوں کے جواب دیں۔
ایک گول میز کے چاروں طرف مرکز کا سامنا کیے ہوئے بیٹھے ہیں، جہاں ہر ایک درمیان H اور A، B، C، D، E، F، G آٹھ لوگ کے بائیں طرف سے تیسرے پر بیٹھا ہے۔ A، C مساوی فاصلہ ہے لیکن وہ لازمی طور پر ایک ہی ترتیب میں نہیں ہیں۔
A اور G کا فوری G کا اور نہ ہی A نہ تو F کے دائیں سے دوسری جگہ پر بیٹھا ہے۔ E، F کے درمیان صرف ایک شخص بیٹھا ہے۔ G اور کا فوری پڑوسی نہیں ہے۔ E، D کے درمیان صرف ایک شخص بیٹھا ہے۔ E اور B پڑوسی ہے۔
G کے دائیں طرف کون بیٹھا ہے؟

A.D
A.D
A.D

B.C
B.C
B.C

C.G
C.G
C.G

D.B
D.B
D.B

Answer: B.C
B.C
B.C

18 सूचना: खालील आकृतीचे प्रतिबिंब शोधून काढा.

DIRECTIONS: Find the mirror image of the figure given below.

چارشکلوں میں سے، مناسب شکل کا انتخاب کرے اسے سوالی نشان کی جگہ رکھنے کے لئے

मुख्य आकृती
Main Figure
اصل شکل

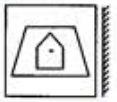

उत्तरासाठी पर्यायी आकृत्या
Answer Figure
جوابی شکل

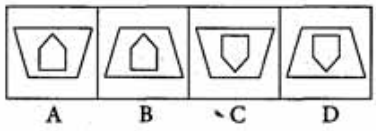

A. (A)

B. (B)

C. (C)

D. (D)

Answer: B. (B)

19 जर त्रिकोणाची प्रत्येक बाजू दुप्पट केली तर त्याचे क्षेत्रफळ मुळ त्रिकोणाच्या k पट होते, k चे मूल्य काय असेल:

If each side of a triangle is doubled its area becomes k times of the original triangle, the value of k is:

اگر ایک مثلث کا ہر طرف دوگنا ہے تو اسکا رقبہ اصلی مثلث کا k وقت ہو جائیگا، k کی قدر ہے:

A.3
A.3
A.3

B.4
B.4
B.4

C.6
C.6
C.6

D.7
D.7
D.7

Answer: B.4
B.4
B.4

20 फक्त सदिश राशी निवडा:

Pick out the only vector quantity:

صرف ویکتر کی مقدار باہر نکالیں:

A.अंतर
A.Distance
A.مسافت

B.विस्थापण
B.Displacement
B.اصل جگہ سے ہٹانا

C.वरील दोन्ही
C.Both of the above
C.درج بالا دونوں

D.यापैकी एकही नाही
D.None of these
D.ان میں سے کوئی بھی نہیں

Answer: B.विस्थापण
B.Displacement
B.اصل جگہ سے ہٹانا

21 खालीलपैकी सर्वांत मोठा अपूर्णांक शोधा

Find the largest of the following fractions

مندرجہ ذیل کسور میں سے سب سے بڑی کسر تلاش کریں

A.111/190
A.111/190
A.111/190

B.41/76
B.41/76
B.41/76

C.4/9
C.4/9
C.4/9

D.52/87
D.52/87
D.52/87

Answer: D.52/87
D.52/87
D.52/87

22 जर A*B चा अर्थ A ही B ची आई आहे आणि A × B चा अर्थ A हा B चा पती आहे, तर खालीलपैकी कशाद्वारे P हा Q चा पिता आहे हे दर्शवले जाते ?

If A*B means A is mother of B and A × B means A is husband of B, then which of the following represents P is father of Q ?

اگر A *B کا مطلب A ہے کی ماں ہے اور A B کا مطلب A × B کا مطلب A B کہ ہے، تو ان میں سے کون بتاتا ہے Q P کا پتی ہے؟ کا باپ

A.P * Q
A.P * Q
A.P * Q

B.Q * M × P
B.Q * M × P
B.Q * M × P

C.Q * P
C.Q * P
C.Q * P

D.P × M * Q
D.P × M * Q
D.P × M * Q

Answer: D.P × M * Q
D.P × M * Q
D.P × M * Q

23	एल्युमिनियमचा धातू म्हणजे- The ore of Aluminum is— ---المیونیم کا خام ہے
	A.फ्लुओरस्पार A.Fluorspar A.فلورسپار
	B.बॉक्साइट B.Bauxite B.ہیماٹائٹ
	C.हेमॅटाइट C.Hematite C.باکسائٹ
	D.कैल्कोपायराइट D.Chalcopyrites D.مسی چقماق
Answer:	B.बॉक्साइट B.Bauxite B.ہیماٹائٹ

24 सूचना: प्रत्येक प्रश्नाला एक प्रमुख विधानासोबत चार विधाने आहेत ज्यांच्याखाली A, B, C, आणि D असे चार विधान आहेत. क्रमवार विधानांची जोडी निवडा ज्यामध्ये प्रथम विधान दुसऱ्या विधानाला सुचवते, आणि दोन्ही विधाने तर्किकदृष्ट्या प्रमुख विधानासोबत निगडित असेल.

ती एकतर कुशल ड्रायव्हर आहे किंवा
अकुशल ड्रायव्हर आहे.
A. ती कुशल ड्रायव्हर आहे.
B. ती एक कुशल ड्रायव्हर नाही.
C. ती अकुशल ड्रायव्हर आहे.
D. ती अकुशल ड्रायव्हर नाही.

DIRECTIONS: Each question has a main statement followed by four statements labelled A, B, C and D. Choose the ordered pair of statements, where the first statement implies the second, and the two statements are logically consistent with the main statement.

She is either a skilled or unskilled driver
A.She is skilled driver
B.She is not a skilled driver
c.She is unskilled driver
D.She is not unskilled driver

ہدایت: ہر سوال میں ایک جملہ ہے جسکے بعد چار جملےاے، بی،سی اور ڈی کے نام سے دئے گئے ہیں اسمیں منسلک جوڑیوں کو چنئے۔ جہاں پہلا جملہ دوسرے جملہ کی اور اشارہ کر رہا ہے اور دو جملے منطقی مرکزی بیان کے مطابق ہیں

وہ یا تو ایک ماہر ڈرائیور ہے یا اناڑی
A۔ وہ ماہر ڈرائیور ہے
B۔ وہ ماہر ڈرائیور نہیں ہے
C۔ وہ اناڑی ڈرائیور ہے
D۔ وہ اناڑی ڈرائیور نہیں ہے

A.AC
A.AC
A.AC

B.DA
B.DA
B.DA

C.CB
C.CB
C.CB

D.AB
D.AB
D.AB

Answer: B.DA
B.DA
B.DA

25 पूर्ण वर्ग करण्यासाठी 24 ने गुणाकार करावा अशी सर्वांत लहान संख्या?

The smallest number by which 24 should be multiplied to make it a perfect square is?

،، سب سے چھوٹاعدد،جس سے مکمل مربع بننے کے لئے 24 کو ضرب دی جا سکے

A.2
A.2
A.2

B.3
B.3
B.3

C.4
C.4
C.4

D.6
D.6
D.6

Answer: D.6
D.6
D.6

26 अपंगत्व असणारे मूल शाळेत पहिला क्रमांक मिळवत येत असेल तर शिक्षकाने

If a child with disability first comes with school the teacher should

اگر ایک معذور بچہ پہلےاسکول ٹیچر کے پاس آتا ہے تو کرنا چاہئے

A.त्यासाठी विशेष शाळेची शिफारस करावी
A.refer to child to a special school
A. بچہ کو کسی خصوصی اسکول میں بھیجنا چاہئے

B.इतर विद्यार्थ्यांपासून त्याला वेगळे ठेवावे
B. seclude him from other students
B.دیگر طلباء سے علاحدہ کر دینا چاہئے

C.सहयोगी योजना विकसित करण्यासाठी पालकांशी चर्चा करावी
C.discuss with the parent to evolve collaborative plans
C.والدین کے ساتھ اشتراک کا منصوبہ بنانا چاہئے

D.प्रवेश चाचणी घ्यावी
D.conduct an admission test
D.داخلہ کے لئے ایک ٹسٹ لینا چاہئے

Answer: C.सहयोगी योजना विकसित करण्यासाठी पालकांशी चर्चा करावी
C.discuss with the parent to evolve collaborative plans
C.والدین کے ساتھ اشتراک کا منصوبہ بنانا چاہئے

27 खालीलपैकी कोणते एक शिकवण्याच्या प्रक्रियेसह संबंधित नाही?

Which one of the following is not related with teaching process?

مندرجہ ذیل میں سے کونسی تعلیم تدریس کے عمل سے متعلق نہیں ہے؟

A.आंतरक्रिया प्रक्रिया
A.Interaction process
A.انٹرویو کے عمل

B.व्यावसायिक पेशासंबंधी प्रक्रिया
B.Vocational process
B.پیشہ ورانہ عمل

C.निरंतर प्रक्रिया
C.Continuous process
C.مسلسل عمل

D.यापैकी कोणतेही नाही
D.None of these
D.ان میں سے کوئی نہیں

Answer: D.यापैकी कोणतेही नाही
D.None of these
D.ان میں سے کوئی نہیں

28 एका 20 मुलींच्या रांगेत कुसुम डावीकडून दहाव्या क्रमांकावर आहे. तर उजवीकडून कुसुम कोणत्या क्रमांकावर असेल ?

In a row of 20 girls, Kusum is tenth from the left.What is the position of Kusum from the right?

20 ؟لڑکیوں کی کتار میں، کسم بھانے سے دس وی ہے.کسم کا دھانے سے کیا مقام ہے

A.11
A.11
A.11

B.12
B.12
B.12

C.10
C.10
C.10

D.20
D.20
D.20

Answer: A.11
A.11
A.11

29 सूचना: तीन लोकांपासून निर्मित एक आकृती खाली दिली आहे ज्यांना नूडल्स, पॅस्ट्री आणि आईस-क्रिम आवडते.

DIRECTIONS: Below is given a figure made of three people who likes Noodles, Pastry and Ice-cream.

ہدایات: مندرجہ ذیل میں ایک تصویردی گئی ہے جو تین افراد کی بنی ہی ہے جو نوڈلس، پیسٹری اورآئس کریم پسند کرتے ہیں.

छेदक भाग M, N, O. P, Q, R आणि S ने दर्शवला आहे. आकृतीचा काळजीपूर्वक अभ्यास करा आणि खालील प्रश्नाचे उत्तर द्या.

The intersecting region have been denoted by M, N, O, P, Q, R and S. Study the diagram carefully and answer the question that follow.

جونکہ خطے کو ایم، این، او، پی، ق، آر اور ایس سے ظاہر کیا گیا ہے، اس تصویر کا احتیاط سے مطالعہ کریں اور اس سوال کا جواب دیں جو آگے ہے .

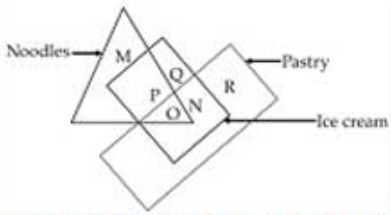

यापैकी कोणते अक्षर केवळ आईस क्रिम आवडणारी व्यक्ति दर्शवते?

Which of the following letters represents the person who likes only Ice-cream?

مندرجہ ذیل حروف میں سے کون سا ایک اس شخص کی نمایندگی کرتا ہے جو صرف آئس کریم پسند کرتا ہے؟

A. O

B. Q

C. P

D. R

Answer: B. Q

30 ‘आय’ या शब्दाचा विरुद्धार्थी शब्द कोणता ?

A.आई

B.आवक

C.व्यय

D.अवयव

Answer: C.व्यय

31 माला ही श्यामची पत्नी आहे. श्याम हा रमणचा एकुलता मुलगा आहे, जो श्यामच्या आईचा पती आहे. माला आणि रमणचे नाते काय?

Mala is the wife of Shyam. Shyam is the only child of Raman, who is the husband of Shyam’s mother. How is Mala related to Raman?

مالا شام کی بیوی ہے. شام رمن کا واحد بیٹا ہے، جو شام کی ماں کا شوہر ہے. مالا کا رمن سے کیا رشتہ ہے؟

A.चुलत बहीण
A.Cousin
A.پھوپھی زاد

B.सून
B.Daughter-in-law
B.بہو

C.पुतणी
C.Niece
C.بھانجی

D.बहीण
D.Sister
D.بہن

Answer: B.सून
B.Daughter-in-law
B.بہو

32 संवादाचे अडथळे याप्रमाणे वर्गीकृत करता येतात-

The barrier of the communication can be categorized as —

مواصلات کی رکاوٹ کی درجہ بندی کی جا سکتی ہے بطور—

A.शारीरिक अडथळे
A.Physical barriers
A.جسمانی رکاوٹ

B.भाषा चे अडथळे
B.Language barriers
B.زبانی رکاوٹیں

C.मानसिक अडथळे
C.Psychological barriers
C.نفسیاتی رکاوٹیں

D.वरील सर्व
D.All the above
D.مندرجہ بالا سبھی

Answer: D.वरील सर्व
D.All the above
D.مندرجہ بالا سبھی

33 खालील आकृतीमध्ये किती त्रिकोण आहेत?

How many triangles are there in the figure given below?

نیچے دی گئی شکل میں کتنے مثلث ہیں؟

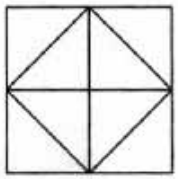

A. 4

B. 12

C. 16

D. 10

Answer: B. 12

34 वन्यजीवन सुरक्षिततेसाठी आंतरराष्ट्रीय संघटना आहे

International Organization for the safety of Wildlife is

جنگلات کی زندگی کی حفاظت کے لئے بین الاقوامی تنظیم ہے

A.आययुसीएन
A.IUCN
A.آئی یو سی این

B.युनिसेफ
B.UNICEF
B. یواین آئی سی ایف

C.आययुपीएसी
C.IUPAC
C.آئی یو پی اے سی

D.डब्ल्यूएचओ
D.WHO
D.ڈبلیو ایچ او

Answer: A.आययुसीएन
A.IUCN
A.آئی یو سی این

35 एका 20 मुलींच्या रांगेत कुसुम डावीकडून दहाव्या क्रमांकावर आहे. तर उजवीकडून कुसुम कोणत्या क्रमांकावर असेल ?

Cow is first from the left end of a row of 7 animals and Buffalo is fifth from the right end in the same row. How many animals are there between them in the row?

7 جانوروں کی کتار میں گھی کتار کے بھانیں چھور سے پہلے ہے اور اسی کتار کے دھانیں چھور سے بھینس کی جگہ پانچوی ہے. کتار میں انکے درمیان کتنے جانور ہے؟

A.1
A.1
A.1

B.5
B.5
B.5

C.6
C.6
C.6

	D.3 D.3 D.3
Answer:	A.1 A.1 A.1
36	A sentence with an underlined idiomatic expression is given. What is the meaning of the idiomatic expression ‘Drive up the wall’ in the sentence given below? The loud music played by my neighbours is driving me up the wall .
	A.To make someone angry or irritated
	B.To make someone happy and relaxed
	C.To accompany someone to the dance floor
	D.None of the above
Answer:	A.To make someone angry or irritated

37 सूचना: माहितीचा काळजीपूर्वक अभ्यास करा आणि दिलेल्या प्रश्नाचे उत्तर द्या.
A, B, C, D, E, F, G आणि H हे आठ लोक एका गोलाकार टेबलाभोवती बसलेले असून मध्यभागी बघत आहेत व एकमेकांपासून समान अंतरावर आहेत परंतु त्याच क्रमाने असतील असे नाही. A, Cच्या डावीकडून तिसरा बसलेला आहे. केवळ एक व्यक्ती A आणि G च्या मध्ये बसते, E हा F च्या उजवी कडून दुसऱ्या जागेवर बसतो. F हा A किंवा G चा तत्काळ शेजारी नाही. केवळ एक व्यक्ती B आणि E च्या मध्ये बसतो. E हा D चा तत्काळ शेजारी नाही.
खालीलपैकी कोण त्या लोकांना दर्शवतात जे A आणि C च्या बरोबर मध्ये बसले जेव्हा C च्या डाव्याबाजूपासून मोजणी होईल?

DIRECTIONS: Study the information carefully and answer the question given.
Eight people A, B, C, D, E, F, G and H are sitting around a circular table facing the centre, with equal distance between each other but not necessarily in the same order. A sits third to the left of C.
Only one person sits between A and G. E sits second to the right of F. F is neither an immediate neighbour of A nor G. Only one person sits between B and E. E is not an immediate neighbour of D.
Who amongst the following represent the people who sit exactly between A and C when counted from left hand side of C?

ہدایات: معلومات کو دھیان سے پڑھیں اور دیے گئے سوالوں کے جواب دیں۔
ایک گول میز کے چاروں طرف مرکز کا سامنا کیے ہوئے بیٹھے ہیں، جہاں ہر ایک درمیان H اور G، F، E، D، C، B، A آٹھ لوگ
کے بائیں طرف سے تیسرے پر بیٹھا ہے۔ A، C مساوی فاصلہ ہے لیکن وہ لازمی طور پر ایک ہی ترتیب میں نہیں ہیں۔
کا فوری G کا اور نہ ہی A نہ تو F کے دائیں سے دوسری جگہ پر بیٹھا ہے۔ E، F کے درمیان صرف ایک شخص بیٹھا ہے۔ G اور A
کا فوری پڑوسی نہیں ہے۔ E، D کے درمیان صرف ایک شخص بیٹھا ہے۔ E اور B پڑوسی ہے۔
کے درمیان C اور A کے بائیں ہاتھ کی طرف سے شمار کرنے پر ٹھیک C مندرجہ ذیل میں سے کون ان لوگوں کی نمائندگی کرتا ہے جو بیٹھے ہیں؟

A.B, G
A.B, G
A.B, G

B.D, F
B.D, F
B.D, F

C.F, H
C.F, H
C.F, H

D.E, F
D.E, F
D.E, F

Answer: A.B, G
A.B, G
A.B, G

38 सूचना: प्रत्येक प्रश्नाला एक प्रमुख विधानासोबत चार विधाने आहेत ज्यांच्याखाली A, B, C, आणि D असे चार विधान आहेत. क्रमवार विधानांची जोडी निवडा ज्यामध्ये प्रथम विधान दुसऱ्या विधानाला सुचवते, आणि दोन्ही विधाने तर्किकदृष्ट्या प्रमुख विधानासोबत निगडित असेल.

हे एकतर ऑनलाइन आहे किंवा ऑफलाइन
आहे.
A. हे ऑनलाइन आहे.
B. हे ऑनलाइन नाही.
C. हे ऑफलाइन आहे.
D. हे ऑफलाइन नाही.

DIRECTIONS: Each question has a main statement followed by four statements labelled A, B, C and D. Choose the ordered pair of statements, where the first statement implies the second, and the two statements are logically consistent with the main statement.

It is either online or offline
A. it is online
B. It is not online
C. It is offline
D. It is not offline

ہدایت: ہر سوال میں ایک جملہ ہے جسکے بعد چار جملےاے، بی،سی اور ڈی کے نام سے دئے گئے ہیں اسمیں منسلک جوڑیوں کو چنئے۔ جہاں پہلا جملہ دوسرے جملہ کی اور اشارہ کر رہا ہے اور دو جملے منطقی مرکزی بیان کے مطابق ہیں

یہ یا تو آن لائن ہے یا آف لائن
A۔ یہ آن لائن ہے
B۔ یہ آن لائن نہیں ہے
C۔ یہ آف لائن ہے
D۔ یہ آف لائن نہیں ہے

A.AC
A.AC
A.AC

B.DA
B.DA
B.DA

C.CB
C.CB
C.CB

D.AB
D.AB
D.AB

Answer: B.DA
B.DA
B.DA

39 पाणी पिण्यायोग्य बनवण्यासाठी कोणत्या रसायनाने उपचार केले जाते?

With which of the chemical is water treated to make it potable?

پانی کو پینے کے قابل بنانے کے لئے کس کیمیکل کے ساتھ ٹریٹ کیا جاتا ہے

A.कॅल्शियम कार्बोनेट
A.Calcium carbonate
A. کیلشیم کاربونیٹ

B.कॅल्शियम हायड्रॉक्साइड
B.Calcium hydroxide
B. کیلشیم ہائڈرآکسائڈ

C.मॅग्नेशियम हायड्रॉक्साईड
C.Magnesium hydroxide
C. میگنیشیم ھائڈراآکسائڈ

D.क्लोरीन गोळ्या
D.Chlorine tablets
D. کلورین کی گولیاں

Answer: D.क्लोरीन गोळ्या
D.Chlorine tablets
D. کلورین کی گولیاں

40 निराश्याच्या लक्षणांमधे हे वगळता सर्व समाविष्ट आहे

Symptoms of depression include all except on

ڈپریشن میں یہ سبھی علامات ہوتی ہیں سوائے ایک

A.अपराधीपणाची भावना
A.Feeling of guilt
A.غلطی کا احساس

B.वजन वाढणे
B.Weight gain
B.وزن بڑھنے

C.निद्रानाश
C.Sleeplessness
C. بے خوابی

D.रस न वाटणे
D.Reduced interest
D. دلچسپی میں کمی

Answer: A.अपराधीपणाची भावना
A.Feeling of guilt
A.غلطی کا احساس

41 **सूचना**: खालील प्रश्नात कागदाच्या एक तुकड्याला प्रश्नातील आकृतीत दाखविल्याप्रमाणे घडी घातली आहे. उत्तरादाखल पर्यायांमधून अशी आकृती निवडा जी भोक पडल्यानंतर उलगडलेल्या कागदाचे स्वरूप दाखवेल.

DIRECTIONS: In the following question a piece of paper is folded in the manner shown in the question figure(s). Select the figure out of the answer choices showing the unfolded pattern after the punches (cut).

ہدایات: نیچے دیئے گئے سوالوں میں کاغذ کا ایک ٹکڑا اس طرح جوڑا گیا ہے جیسے سوال کی شکل میں بتایا گیا ہے، دیئے گئے جوابات کے اختیارات میں سے اس طرح انتخاب کیجیئے کہ کٹ لگانے کے بعد بغیر جوڑا ہوا پیٹرن دکھائی دے۔

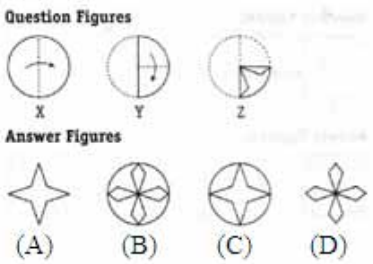

A. (A)

B. (B)

C. (C)

D. (D)

Answer: B. (B)

42 दर स्वातंत्र्य दिनाला, राष्ट्रपती _____येथे भारतीय झेंडा फडकावतात –

Every Independence Day, the Prime Minister hoists the Indian flag at –

ہر یوم آزادی میں، _____ پر وزیر اعظم ہندوستانی جھنڈا پھراتا ہے

A.जंतर मंतर
A.Jantar Mantar
A.جنتر منتر

B.लाल किल्ला
B.Red Fort
B.لال قلعہ

C.इंडिया गेट
C.India Gate
C.انڈیا گیٹ

D.गेटवे ऑफ इंडिया
D.Gateway of India
D.گیٹ وے آف انڈیا

Answer: B.लाल किल्ला
B.Red Fort
B.لال قلعہ

43 प्रश्नासाठी सूचना: खालील मालिका पूर्ण करा.

AP, BQ, CR, DS, _____

DIRECTION: Complete the following series.

AP, BQ, CR, DS, _____

سوال کے لیے ہدایت: مندرجہ ذیل سیریز کو مکمل کریں۔

AP, BQ, CR, DS _____

A.ET
A.ET
A.ET

B.EU
B.EU
B.EU

C.TE
C.TE
C.TE

D.EV
D.EV
D.EV

Answer: A.ET
A.ET
A.ET

44 दृक-श्राव्य सहायतेच्या अनुकूलनक्षमतेचा अर्थ म्हणजे

The meaning of adaptability of the audio-visual aid is—

آڈیو بصری امداد کو اپنانے کے معنی یہ ہے-

A.दृक-श्राव्य सहायता विद्यार्थ्याच्या मानसिक पातळीनुसार असायला हवी
A.The audio-visual aid should be according to the students' mental level
A.آڈیو بصری امداد طلباء کی ذہنی سطح کے مطابق ہونا چاہئے

B.दृक-श्राव्य सहायता शिक्षकांच्या क्षमतेनुसार असायला हवी
B.The audio-visual aid should be according to teachers, capabilities
B.آڈیو بصری امداد اساتذہ کی صلاحیتوں کے مطابق ہونا چاہئے

C.दृक-श्राव्य सहायता त्यातील सामग्रीच्या स्वरूपानुसार असायला हवी
C.The audio-visual aid should be according to nature of content
C.آڈیو بصری امداد مواد کی نوعیت کے مطابق ہونا چاہئے

D.वरील सर्व
D.All the above
D.مذکورہ تمام

Answer: C.दृक-श्राव्य सहायता त्यातील सामग्रीच्या स्वरूपानुसार असायला हवी
C.The audio-visual aid should be according to nature of content
C.آڈیو بصری امداد مواد کی نوعیت کے مطابق ہونا چاہئے

45 फुप्फुसांच्या पातळ भिंतीवरील रक्तवाहिन्यांमधुन रक्त जाताना काय होते?

What happens to blood when it is pumped into the thin-walled blood vessels of the lungs?

جب خون پھیپھڑوں کی پتلی دیواروں والی وریدوں میں پمپ کیا جاتا ہے تو خون کے ساتھ کیا ہوتا ہے؟

A.प्लेटलेट्स प्लाज्मासाठी बदलले जातात (ए)
A.Platelets are exchanged for plasma
A. پلیٹلیٹس پلازمہ میں تبدیل ہو جاتا ہے

B.कार्बन डायऑक्साईडला ऑक्सीजनने बदलले जाते
B.Carbon dioxide is replaced with oxygen.
B. کاربن ڈائی آکسائیڈ ؛ آکسیجن سے بدل جاتا ہے

C.रक्त फुफ्फुसात भरते आणि खोकला येतो
C.Blood fills the lungs and causes coughing.
C. خون پھیپھڑوں میں بھر جاتا ہے اور کھانسی کی وجہ بنتا ہے .

D.काहीही नाही – फुफ्फुस रक्ताला जागा देते आणि रक्त आपल्या रस्त्याने हृदयामध्ये परत जाते.
D.Nothing — the lungs are just a place blood goes through on its way back to the heart.
D. - کچھ بھی نہیں - پھیپھڑے صرف ایک جگہ ہے جہاں خون دل سے واپس ہوتے وقت گزرتا ہے

Answer: B.कार्बन डायऑक्साईडला ऑक्सीजनने बदलले जाते
B.Carbon dioxide is replaced with oxygen.
B. کاربن ڈائی آکسائیڈ ؛ آکسیجن سے بدل جاتا ہے

46 विवेकने आपले घड्याळ टेबलावर अशा तऱ्हेने ठेवले की सायं. 6 वाजता तास काटा उत्तर दिशेकडे निर्देश करतो. रा. 9.15 ला मिनिट काटा कोणत्या दिशेकडे निर्देश करीत असेल?

Vivek put his watch on the table in such a way that at 6 P.M. hour hand points to North. In which direction the minute hand will point at 9:15 P.M. ?

وویک اپنی گڑھی کو میز پر اس طرح رکھتا ہے کہ شام کے 6 بجے والی گھنٹے کا کانٹا یشمال کی طرف ہے - تو رات 9:15 بجے منٹ کا کانٹا کس سمت کی طرف اشارہ کریگا؟

A.दक्षिण पूर्व
A.East
A.جنوب مشرق

B.दक्षिण
B.South
B.جنوب

C.उत्तर
C.North
C.شمال

D.पश्चिम
D.West
D.مغرب

Answer: D.पश्चिम
D.West
D.مغرب

47 समोरासमोर चर्चेद्वारे अर्थपूर्ण संभाषणाला म्हणतात

Purposeful conversation through face to face interaction is termed as

بامقصد گفتگو جو آمنے سامنے کے تعامل کے ذریعے ہو، اسے اصطلاحا کہا جاتا ہے:

A.मुलाकात
A.Interview
A. انٹرویو

B.योग्यता चाचणी
B.Aptitude test
B.لیاقت ٹسٹ

C.बुद्धिमत्ता चाचणी
C.Intelligence test
C.ذہانت ٹسٹ

D.समुह चाचणी
D.Group test
D.گروپ ٹسٹ

Answer: A.मुलाकात
A.Interview
A. انٹرویو

48 दिलेल्या श्रेणीतील पुढची संज्ञा काय असेल?

The next term of a given pattern will be

دیئے گئے پیٹرن میں اگلی اصطلاح کیا ہوگی؟



A. × -

B. - ×

C. + ×

D. - +

Answer: A. × -

49 निर्देश: खालील शब्दांची इंग्रजी शब्दकोशानुसार मांडणी करा.
(a) Wound
(b) Writer
(c) Whiter
(d) Worst
(e) Worked

DIRECTIONS: Arrange the following words according to the English dictionary.
(a) Wound
(b) Writer
(c) Whiter
(d) Worst
(e) Worked

ہدایت: انگریزی لغت کے مطابق مندرجہ ذیل الفاظ کو مرتب کریں۔
(a) Wound
(b) Writer
(c) Whiter
(d) Worst
(e) Worked

A.(a), (d), (c), (e), (b)
A.(a), (d), (c), (e), (b)
A.(a), (d), (c), (e), (b)

B.(b), (a), (c), (d), (e)
B.(b), (a), (c), (d), (e)
B.(b), (a), (c), (d), (e)

C.(c), (e), (d), (a), (b)
C.(c), (e), (d), (a), (b)
C.(c), (e), (d), (a), (b)

D.(e), (c), (b), (a), (d)
D.(e), (c), (b), (a), (d)
D.(e), (c), (b), (a), (d)

Answer: C.(c), (e), (d), (a), (b)
C.(c), (e), (d), (a), (b)
C.(c), (e), (d), (a), (b)

50 317 × 122 =?

317 × 122 =?

317 × 122 =?

	A.38674 A.38674 A.38674
	B.38774 B.38774 B.38774
	C.48674 C.48674 C.48674
	D.39674 D.39674 D.39674
Answer:	A.38674 A.38674 A.38674

51	दिलेल्या मालिकेतील 20, 15, 10,..... चे 5वे पद शोधा : Find the 5th term of the series: 20, 15, 10,..... 20,15,10 ..... اس سرج کی پانچوی ٹرم کیا ہے ؟
	A.-45 A.-45 A.-45
	B.-55 B.-55 B.-55
	C.-50 C.-50 C.-50
	D.0 D.0 D.0
Answer:	D.0 D.0 D.0

52 ‘तुमच्या शाळेतील मुले चांगली आहेत. ’ या वाक्यातील विशेषण ओळखा.

A.तुमच्या

B.शाळेतील

C.मुले

D.चांगली

Answer: D.चांगली

53 सूचना: प्रत्येक प्रश्नाला एक प्रमुख विधानासोबत चार विधाने आहेत ज्यांच्याखाली A, B, C, आणि D असे चार विधान आहेत. क्रमवार विधानांची जोडी निवडा ज्यामध्ये प्रथम विधान दुसऱ्या विधानाला सुचवते, आणि दोन्ही विधाने तर्किकदृष्ट्या प्रमुख विधानासोबत निगडित असेल.

जर लवकर अंधार पडत असेल, तर मी लवकर घरी येईल.
A. लवकर अंधार पडला .
B. लवकर अंधार पडला नाही.
C. मी लवकर घरी आलो.
D. मी लवकर घरी आलो नाही.

DIRECTIONS: Each question has a main statement followed by four statements labelled A, B, C and D. Choose the ordered pair of statements, where the first statement implies the second, and the two statements are logically consistent with the main statement.

If it gets dark early, I will come home soon.
A. It got dark early
B. It did not get dark early
C. I came home soon
D. I did not come home soon

ہدایت: ہر سوال میں ایک جملہ ہے جسکے بعد چار جملےاے، بی،سی اور ڈی کے نام سے دئے گئے ہیں اسمیں منسلک جوڑیوں کو چنئے۔ جہاں پہلا جملہ دوسرے جملہ کی اور اشارہ کر رہا ہے اور دو جملے منطقی مرکزی بیان کے مطابق ہیں

اگر اندھیرا جلد چھا گیا تو میں گھر جلدی آ جاؤں گا۔
Aاندھیرا جلدی چھا گیا ۔
Bاندھیرا جلدی نہیں چھایا ۔
Cمیں جلدی گھر آیا ۔
Dمیں جلدی گھر نہیں آیا ۔

A.AC
A.AC
A.AC

B.BC
B.BC
B.BC

C.DA
C.DA
C.DA

D.CD
D.CD
D.CD

Answer: A.AC
A.AC
A.AC

54 खालील प्रश्नामध्ये प्रश्न चिन्हाच्या (?) जागी काय यायला हवे?

What should come in place of the question mark (?) in the following question?

ذیچے دئے ہوئے سوالات میں سوالیہ نشان (؟) کی جگہ کیا آئے گا۔۔

$\frac{(2.644)^2-(2.356)^2}{0.288}=?$

A. 1

B. 4

C. 5

D. 6

Answer: C. 5

55 चार मिनार कुठे स्थित आहे?

Where is the Char Minar located?

چار مینار کہاں واقع ہے؟

A.बेंगलुरू
A.Bengaluru
A.بنگلورو

B.हैदराबाद
B.Hyderabad
B.حیدرآباد

C.चेन्नई
C.Chennai
C.چینئی

D.यांपैकी कोणतेही नाही
D.None of these
D.ان میں سے کوئی نہیں

Answer: B.हैदराबाद
B.Hyderabad
B.حیدرآباد

56 एका घनाकृतीच्या तीन अवस्था दाखविल्या आहेत. त्यांवर अवलंबून हे शोधून काढा की दिलेल्या घनाकृतीमध्ये 4 या अंकाच्या विरुद्ध बाजूला कोणता अंक असेल?

Three positions of a cube are given. Based on them, find out, which number is found opposite number 4 in a given cube?

ہدایات: ایک کیوب کی تین حالتیں دی گئی ہیں۔ ان کی بنیاد پر، دریافت کیجیئے، کونسا نمبر کیوب میں دیئے گئے 4 نمبر کی اپوسٹ ہے ؟



A. 3

B. 5

C. 6

D. 1

Answer: D. 1

57 ‘REASONABLE’ पासून खालील शब्दांपैकी कोणते शब्द तयार केले जाऊ शकत नाहीत?

Which of the following words cannot be formed from ‘REASONABLE’?

مندرجہ ذیل الفاظ میں سے کونسا ‘REASONABLE’ سے نہیں بنایا جاسکتا ہے؟

A.BONES
A.BONES
A.BONES

B.BRAIN
B.BRAIN
B.BRAIN

C.ARSON
C.ARSON
C.ARSON

D.NOBLE
D.NOBLE
D.NOBLE

Answer: B.BRAIN
B.BRAIN
B.BRAIN

58 बर्फचा वितळण बिंदू काय आहे??

What is the melting point of ice?

برف کس درجہ حرارت پر پگھلتا ہے؟

A.100 डिग्री सेल्सियस
A.100 degrees Celsius
A.100° C

B.0 डिग्री सेल्सियस
B.0 degree Celsius
B.0° C

C.1 डिग्री सेल्सियस
C.1 degree Celsius
C.1° C

D.10 डिग्री सेल्सियस
D.10 degree Celsius
D.10° C

Answer: B.0 डिग्री सेल्सियस
B.0 degree Celsius
B.0° C

59 ऑब्सेसिव्ह कंपल्सिव्ह डिसॉर्डर बाबत खालीलपैकी काय खरे आहे

Which one of the following is true about obsessive compulsive disorder

مندرجہ ذیل میں سے کیا وہم کے غلبہ کا جبری مرض کے بارے میں صحیح ہے

A.एखाद्या गोष्टीने पछाडल्यामुळे वाटणारी खंत मोकळी करण्यासाठी एखादी व्यक्ती करते ते वर्तन
A.Behaviour a person shows to relieve the distress they feel become of obsessions
A.ایک شخص کا برتاو ظاہر کرتا ہے کہ وہ جو دباؤ محسوس کر رہا ہے وہم والا ہونے کا اس سے وہ راحت پائے

B.लोकांना हानी पोहचविणारे वर्तन
B.Behaviour to harm people
B. لوگوں کو نقصان پہچانے والا برتاو

C.टोकाचा स्वभाव प्रदर्शित करणे
C.Behaviour to show extreme nature
C.متشدد فطرت کا اظہار

D.वरीलपैकी कोणतेही नाही
D.none of the above
D.درج بالا میں سے کوئی نہیں

Answer: A.एखाद्या गोष्टीने पछाडल्यामुळे वाटणारी खंत मोकळी करण्यासाठी एखादी व्यक्ती करते ते वर्तन
A.Behaviour a person shows to relieve the distress they feel become of obsessions
A.ایک شخص کا برتاو ظاہر کرتا ہے کہ وہ جو دباؤ محسوس کر رہا ہے وہم والا ہونے کا اس سے وہ راحت پائے

60 62 किग्रॅ 420 ग्रॅ = ----------ग्रॅम

62Kg 420 g = ----------g

62گرام---------- = کلوگرام 420 گرام

A.60420 ग्रॅम
A.60420g
A.60420گرام

B.624200 ग्रॅम
B.624200g
B.624200گرام

C.623200 ग्रॅम
C.623200g
C.623200گرام

D.62420 ग्रॅम
D.62420g
D.62420گرام

Answer: D.62420 ग्रॅम
D.62420g
D.62420گرام

61 हर्षचे सध्याचे वय 40 वर्षे आहे आणि रिथचे 60 वर्षे आहे. किती वर्षांपूर्वी त्यांच्या वयाचे गुणोत्तर 3:5 होते?

The age of Harsh is 40 years and that of Rith is 60 years. How many years ago the ratio of their age was 3 : 5?

ہریش کی عمر 40 سال ہے جبکہ ریتھ کی عمر 60 سال ہے۔کتنے سال پہلے اُن کی عمروں کا تناسب 5:3 تھا؟

A.10
A.10
A.10

B.20
B.20
B.20

C.37
C.37
C.37

D.5
D.5
D.5

Answer: A.10
A.10
A.10

62 रु. 436 ला वस्तूची विक्री केली असता सोसाव्या लागणाऱ्या तोट्याची टक्केवारी ही तिची विक्री रु. 464 ला केल्यावर होणाऱ्या नफ्याच्या टक्केवारी एवढीच आहे. त्या वस्तूची खरेदी किंमत काढा?

The loss percent incurred when an object is sold at Rs.436 is equal to the profit percent, when the object is sold at Rs.464. Find the cost price of that object?

جب ایک چیز 436 روپے میں فروخت کی جاتی ہے تو نقصان کا فیصد منافع کے فیصد کے برابر ہوتا ہے، جب وہ چیز 464 روپے میں فروخت کی جائے تواس چیز کی لاگت قیمت تلاش کریں؟

A.460
A.460
A.460

B.389
B.389
B.389

C.450
C.450
C.450

D.400
D.400
D.400

Answer: C.450
C.450
C.450

63 **सूचना**: खालील प्रश्नात दिलेल्या पर्यायांमधून नातेसंबंध असणारी आकृती शोधून काढा.

DIRECTIONS: In the question below, select the related figure from the given alternatives.

ہدایات: نیچے دیئے گئے سوال میں، دیئے گئے متبادلات میں سے متعلق متبادل چنئے۔

Question Figure

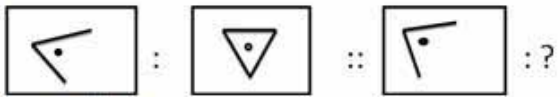

(A) 

(B) 

(C) 

(D) 

Answer: (C) 

64 निर्देश: दिलेल्या अंक मालिकेतील चुकीची संज्ञा शोधा:

3, 5, 11, 29, 87, 245

DIRECTIONS: Find the wrong term in the given number series:

3, 5, 11, 29, 87, 245

ہدایت دے گئے نمبرس سرج مے غلط نمبر کھوجے

3, 5, 11, 29, 87, 245

A.87
A.87
A.87

B.11
B.11
B.11

C.29
C.29
C.29

D.245
D.245
D.245

Answer: A.87
A.87
A.87

65 सूचना: खालील प्रश्नांमध्ये दिलेल्या पर्यायांमधून संबंधित अक्षर/शब्द/संख्या निवडा.

मीठ : खारट ::

DIRECTIONS: In the following question, select the related letter/word/number from the given alternatives.

Salt: Salty ::

سمت: مندرجہ ذیل سوال میں، دیے گئے متبادل سے متعلقہ حرف/لفظ/نمبر منتخب کریں۔

نمک: نمکین ::

A.दही : दूध
A.Curd : Milk
A.دہی : دودھ

B.भाजी : साखर
B.Vegetable : Sugar
B.سبزی : شکر

C.ब्रेड : लोणी
C.Bread : Butter
C.بریڈ : مکھن

D.साखर : गोड
D.Sugar : Sweet
D.شکر : میٹھا

Answer: D.साखर : गोड
D.Sugar : Sweet
D.شکر : میٹھا

66 निर्देश: मालिका पूर्ण करा

W, L, T, J, ?, H, N, F

DIRECTION: Complete the series

W, L, T, J, ?, H, N, F

ہدایت اس سرج کو مکمّل کرو

W, L, T, J, ?, H, N, F

A.I
A.I
A.I

B.P
B.P
B.P

C.E
C.E
C.E

D.Q
D.Q
D.Q

Answer: D.Q
D.Q
D.Q

67 न्यूट्रोनच्या शोधासाठी नोबेल पुरस्कार कोणास देण्यात आले?

Who was awarded the Noble prize for the discovery of neutron?

نیوٹرون کے دریافت کے لئے کن کو نوبل انعام سےنوازا گیا تھا؟

A.चॅडविक
A.Chadwick
A.چیڈوک

B.नील्स बोहर
B.Niels Bohr
B.نیلس بور

C.रदरफोर्ड
C.Rutherford
C.رتھرفولڈ

D.रॉनटगेन
D.Rontgen
D.رونٹجین

Answer: A.चॅडविक
A.Chadwick
A.چیڈوک

68 खालीलपैकी कोणते भारताचे सर्वात मोठे जीवमंडल राखीव आहे?

Which of the following is the largest Biosphere Reserve of India?

مندرجہ ذیل میں سے کون بھارت کا سب سے بڑا بایواسفئر ریزرو ہے؟

A.निलगिरी
A.Nilgiri
A. نیلگری

B.नंददेवी
B.Nanda Devi
B. نندا دیوی

	C.सुंदरबन C.Sundarbans C. سندربن
	D.मन्नारचे आखात D.Gulf of Mannar D. منار کی خلیج
Answer:	D.मन्नारचे आखात D.Gulf of Mannar D. منار کی خلیج

69	Choose the word which is opposite in meaning to the given word. FEASIBLE
	A.Impracticable
	B.Practicable
	C.Achievable
	D.Attainable
Answer:	A.Impracticable

70 निर्देश: खालील शब्दांची तार्किक क्रमाने मांडणी करा:

(i) खांदा
(ii) कोपर
(iii) मनगट
(iv) करतल
(v) फिंगर

DIRECTIONS: Arrange the following in a logical order:

(i) Shoulder
(ii) Elbow
(iii) Wrist
(iv) Palm
(v) Finger

ہدایات: ایک منطقی ترتیب میں مندرجہ ذیل کو مرتب کریں:

(i) کندھے
(ii) کلہ
(iii) کلائی
(iv) ہتھیلی
(v) انگلی

A.(v), (iv), (iii), (ii), (i)
A.(v), (iv), (iii), (ii), (i)
A.(v), (iv), (iii), (ii), (i)

B.(iii), (iv), (v), (ii), (i)
B.(iii), (iv), (v), (ii), (i)
B.(iii), (iv), (v), (ii), (i)

C.(iii), (i), (iv), (ii), (v)
C.(iii), (i), (iv), (ii), (v)
C.(iii), (i), (iv), (ii), (v)

D.(ii), (iv), (v), (iii), (i)
D.(ii), (iv), (v), (iii), (i)
D.(ii), (iv), (v), (iii), (i)

Answer: A.(v), (iv), (iii), (ii), (i)
A.(v), (iv), (iii), (ii), (i)
A.(v), (iv), (iii), (ii), (i)

71	तेजस्वी तीव्रतेचे एसआय एकक आहे: SI unit of luminous intensity is: چمک کی شدت کی ایس آئی اکائی ہے:
	A.लुमेन A.Lumen A.نوریہ
	B.लक्स B.Lux B.آرام دہ
	C.कॅन्डेला C.Candela C.قندیلہ
	D.वौट D.Watt D.واٹ
Answer:	C.कॅन्डेला C.Candela C.قندیلہ

72	DIRECTIONS: A sentence with an underlined word is given below. Find the Word which is most similar in meaning to the underlined word. Martha felt greatly relieved after her mother absolved her for breaking her favourite vase.
	A.Pardoned
	B.Punished
	C.Scolded
	D.Boycotted
Answer:	A.Pardoned

73 सूचना: माहितीचा काळजीपूर्वक अभ्यास करा आणि दिलेल्या प्रश्नाचे उत्तर द्या.
A, B, C, D, E, F, G आणि H हे आठ लोक एका गोलाकार टेबलाभोवती बसलेले असून मध्यभागी बघत आहेत व एकमेकांपासून समान अंतरावर आहेत परंतु त्याच क्रमाने असतील असे नाही. A, Cच्या डावीकडून तिसरा बसलेला आहे. केवळ एक व्यक्ती A आणि G च्या मध्ये बसते, E हा F च्या उजवी कडून दुसऱ्या जागेवर बसतो. F हा A किंवा G चा तत्काळ शेजारी नाही. केवळ एक व्यक्ती B आणि E च्या मध्ये बसतो. E हा D चा तत्काळ शेजारी नाही.
दिलेल्या व्यवस्थेप्रमाणे H संदर्भात खालीलपैकी कोणते सत्य आहे?

DIRECTIONS: Study the information carefully and answer the question given.
Eight people A, B, C, D, E, F, G and H are sitting around a circular table facing the centre, with equal distance between each other but not necessarily in the same order. A sits third to the left of C. Only one person sits between A and G. E sits second to the right of F. F is neither an immediate neighbour of A nor G. Only one person sits between B and E. E is not an immediate neighbour of D.
Which of the following is TRUE regarding H as per the given arrangement?

ہدایات: معلومات کو دھیان سے پڑھیں اور دیے گئے سوالوں کے جواب دیں۔
ایک گول میز کے چاروں طرف مرکز کا سامنا کیے ہوئے بیٹھے ہیں، جہاں ہر ایک درمیان H اور A، B، C، D، E، F، G آٹھ لوگ کے بائیں طرف سے تیسرے پر بیٹھا ہے۔ A، C مساوی فاصلہ ہے لیکن وہ لازمی طور پر ایک ہی ترتیب میں نہیں ہیں۔
A اور G کا فوری G کا اور نہ ہی A نہ تو F کے دائیں سے دوسری جگہ پر بیٹھا ہے۔ E، F کے درمیان صرف ایک شخص بیٹھا ہے۔
کا فوری پڑوسی نہیں ہے۔ E، D کے درمیان صرف ایک شخص بیٹھا ہے۔ E اور B پڑوسی ہے۔
سے متعلق مندرجہ ذیل میں سے کون درست ہے؟ H دیے گئے انتظام کے مطابق

A.H च्या तत्कालीन शेजारच्यांपैकी एक D च्या तत्काळ उजवीकडे बसलेला आहे
A.One of the immediate neighbours of H sits immediate right of D
A.H کے فوری دائیں طرف بیٹھتا ہے۔ D کا ایک فوری پڑوسی

B.H हा A आणि B दोन्हीचा तत्कालीन शेजारी आहे
B.H is an immediate neighbour of both A and B
B.H، A اور B دونوں کا فوری پڑوسی ہے

C.केवळ तीन लोक H आणि Cच्या मध्ये बसलेले आहेत
C.Only three people sit between H and C
C.H اور C کے درمیان صرف تین لوگ بیٹھے ہیں

D.H हा F च्या डाव्या बाजूला दुसरा आहे
D.H sits second to the left of F
D.H، F کے بائیں طرف سے دوسرے پر بیٹھا ہے

Answer: A.H च्या तत्कालीन शेजारच्यांपैकी एक D च्या तत्काळ उजवीकडे बसलेला आहे
A.One of the immediate neighbours of H sits immediate right of D
A.H کے فوری دائیں طرف بیٹھتا ہے۔ D کا ایک فوری پڑوسی

74 खालील पैकी कोणते पूर्ण वर्ग आहे?

Which of the following is a perfect square?

مندرجہ ذیل میں سے کون ایک کامل مربع ہے؟

A.19881
A.19881
A.19881

B.18971
B.18971
B.18971

C.17951
C.17951
C.17951

D.16831
D.16831
D.16831

Answer: A.19881
A.19881
A.19881

75 अध्यापन धोरणाचा दर्जा यावर अवलंबून असतो

The quality of teaching strategy depends upon –

ٹیچنگ کی حکمت عملی کا معیار _____ پر منحصر ہوتا ہے

A.निश्चित अध्ययन मॉडेल
A.Definite teaching model
A.متعین ٹیچنگ ماڈل

B.शिक्षकांचे कौशल्य
B.Teachers' skill
B.ٹیچر کی مہارت

C.शिक्षणाचे वैज्ञानिक स्वरूप
C.Scientific nature to teaching
C.ٹیچنگ کا سائنسی فطرت

D.हे सर्व
D.All of these
D.ان میں سے تمام

Answer: D.हे सर्व
D.All of these
D.ان میں سے تمام

76 विधान:
परीक्षा मध्ये फसवणूक सर्रासपणे होत आहे आणि अधिकारी ही फसवणूक थांबविण्यासाठी काहीही करीत नाहीत.

कृतीचा कोर्स:
I. परीक्षेमध्ये फसवणूक बेकायदेशीर केले पाहिजे आणि कठोर शिक्षा केली पाहिजे.
II. धोकेबाजीस परवानगी देणाऱ्या अधिकाऱ्याविरूद्ध कठोर कारवाई केली पाहिजे.

Statement:
Cheating in exams is rampant and the authorities do nothing to stop this cheating.

Course of actions:
I. Cheating in exams should be made illegal and strict punishment should be prescribed.
II. Strict action should be taken against authorities allowing cheating.

بیان:
امتحانات میں بہت زیادہ نقل کی جاتی ہے اور حکام اسے روکنے کے لیے کچھ نہیں کرتے۔

لائحہ عمل:
I۔ امتحانات میں نقل کو غیر قانونی قرار دے کر سخت سزا مقرر کی جانی چاہیے۔
II۔ نقل کی اجازت دینے والے حکام کے خلاف سخت کاروائی کی جانی چاہیے۔

A.फक्त I अनुसरून आहे
A.Only I follows
A. صرف I لاگو ہو گا۔

B.फक्त II अनुसरण करते आहे
B.Only II follows
B. صرف II لاگو ہو گا۔

C.एकतर I किंवा II अनुसरून आहे
C.Either I or II follows
C. I یا II میں سے ایک لاگو ہو گا۔

D.I किंवा II दोन्हीपैकी काहीही अनुसरण करत नाही.
D.Both I and II follow
D. I اور II دونوں لاگو ہوں گے۔

Answer: D.I किंवा II दोन्हीपैकी काहीही अनुसरण करत नाही.
D.Both I and II follow
D. I اور II دونوں لاگو ہوں گے۔

77 आकाशात गमन करणारा -

A.मेघ

B.विमान

C.पक्षी

D.खग

Answer: D.खग

78 सूचना: अर्थपूर्ण परिच्छेद निर्माण करण्यासाठी, खाली दिलेली (P), (Q) (R), (S) आणि (T) ही पाच वाक्ये योग्य अनुक्रमाने पुनर्रचना करा; त्यांनतर खालील प्रश्नांची उत्तर द्या. P. कृष्णाने त्यांना त्यांचे डोळे बंद करायला सांगून जोपर्यंत सांगत नाही तोपर्यंत उघडू नये म्हणूनही सांगितले.
Q. ते खेळण्यात एवढे गुंग होते कि त्यांच्या सभोवती जंगलाला आग लागलायचे लक्षात आले नाही.
R. सर्वानी डोळे बंद केल्यानंतर कृष्णाने सर्व आग गिळून टाकली आणि सर्व मित्रांना आणि गायींना वाचविले.
S. एकदा कृष्ण आपल्या बालमित्रांसोबत गायी घेऊन घनदाट जंगलात गेला होता.
T. सर्वजण घाबरले आणि त्यांनी मदतीसाठी कृष्णाला विनवणी केली.

पुनर्रचना केल्यानंतर खालीलपैकी कोणते वाक्य तिसरे असेल?

DIRECTION: Rearrange the following five sentences (P), (Q), (R), (S) and (T) in the proper sequence to form a meaningful paragraph; then answer the questions given below them.
P. Krishna asked them all to close their eyes and not to open them until he asked them to do so
Q. They were so busy in their games that they did not realize a fire broke into the forest, all around them.
R. While everybody's eyes were closed Krishna swallowed all the fire and hence protected his friends and cows.
S. Once, Krishna and his friends went deep into the jungle with their cows.
T. Everybody was petrified and pleaded Krishna to help them.

Which of the following should be the THIRD sentence after rearrangement?

ہدایات: ان پانچ جملوں (P)، (Q)، (R)، (S) اور (T) کو با معنی پیرا بنانے کے لئے دوبارہ ترتیب دیجئے، پھر نیچے دے گئے سوالوں کے جواب دیجئے
P . کرشنا نے انسے کہا کہ وو سب اپنی آنکھیں بند کرے اور تب تک نہ کھولے جب تک وو نہ کہے.
Q. وو اپنے کھیل میں مصروف تھے کہ انکو احساس ہی نہی ہوا کہ انکے ارد گرد چاروں اور جنگل میں آگ لگ گی ہے.
R. جب سب کی آنکھیں بند تھی کرشنا نے ساری آگ نغل لی اور اس طرح اپنے دوستوں اور گائیں بچا لی.
S. ایک بار کرشنا اور اسکے دوست اپنی گائیں کے ساتھ جنگلکے اندھر چلے گے.
T. ہر کوئی ڈرا ہوا تھا اور کرشنا سے مدد کی التجا کر رہے تھے.

دوبارہ ترییب دینے کے بعد کون سا جملہ تیسرا ہونا چاہیے؟

A.T
A.T
A.T

B.P
B.P
B.P

C.R
C.R
C.R

D.S
D.S
D.S

Answer: A.T
A.T
A.T

79

सूचना: दिलेल्या चारांपैकी वेगळी (असंबद्ध) असणारी आकृती शोधून काढा.

DIRECTIONS: Find the odd from the given four figures.

ہدایات: دیئے گئے چارشکلوں میں طاق کونسی ہے؟



(A) (B) (C) (D)

A. (A)

B. (B)

C. (C)

D. (D)

Answer: D. (D)

80 ' माशा मारणे ' या वाक्प्रचाराचा अर्थ काय ?

A.निरुद्योगी असणे

B.संकट दूर करणे

C.रोग दूर करणे

D.सामाजिक कर्तव्य पार पाडणे

Answer: A.निरुद्योगी असणे

81 A आणि B हे एक काम अनुक्रमे 15 दिवस आणि 10 दिवसांत पूर्ण करतात. त्यांनी एकत्र कामाला सुरूवात केली पण 2 दिवसांनंतर, B ला काम सोडून जावे लागले आणि A ने एकट्याने राहिलेले काम पूर्ण केले. पूर्ण काम किती दिवसांत पूर्ण होईल?

A and B can complete a piece of work in 15 days and 10 days respectively. They started doing the work together but after 2 days, B had to leave and A alone completed the remaining work. The whole work was completed in how many days?

A اور B دن بعد 2 لیکن کام شروع کیا ساتھ مل کر کام مکمل کر سکتے ہیں۔ انہوں نے 10دنوں میں اور 15 کو ایک کام کو B اور A کو جانا پڑا نے اکیلے ہی باقی کام کو مکمل کیا۔ سارا کام کتنے دنوں میں مکمل ہوا؟

A.10 दिवस
A.10 days
A.10دن

B.8 दिवस
B.8 days
B.8دن

C.12 दिवस
C.12 days
C.12دن

D.15 दिवस
D.15 days
D.15دن

Answer: C.12 दिवस
C.12 days
C.12دن

82 जर , ÷ → x, P → N ,– → M ,+ → L तर? = 8 M 2 P 42 L 10 N 4

If L → +, M → –, N → x, P → ÷ ,then 4 N 10 L 42 P 2 M 8 = ?

اگر ÷ → P ،x → N ،– → M ،+ → L ہو تو ? = 4 N 10 L 42 P 2 M 8

A. 53

B. 26

C. 24

D. 25

Answer: A. 53

83 प्राथमिक पायरीला, लिहीणे शिकवण्यासाठी कोणती पद्धत उपयुक्त आहे?

At Primary stage, which method for teaching of writing is useful?

ابتدائی مرحلے میں، لکھنے کی تدریس کے لئے کون سا طریقہ فائدہ مند ہے؟

A.फ्रेंच पद्धत
A.French method
A.فرانسیسی طریقہ

B.किंडरगार्डन पद्धत
B.Kindergarden method
B.کنڈر گارڈن طریقہ

C.प्ले वे पद्धत
C.Play way method
C.پلے وے کا طریقہ

D.वरील सर्व
D.All of the above
D.مذکورہ تمام

Answer: D.वरील सर्व
D.All of the above
D.مذکورہ تمام

84 सूचना: खालील प्रश्नांमध्ये दिलेल्या पर्यायांमधून संबंधित अक्षर/शब्द/संख्या निवडा.

डोळा : मिचकावणे :: हृदय : ?

DIRECTIONS: In the following question, select the related letter/word/number from the given alternatives.

Eye : Wink :: Heart : ?

سمت: مندرجہ ذیل سوال میں، دیے گئے متبادل سے متعلقہ حرف/لفظ/نمبر منتخب کریں۔

آنکھ : جھپکنا :: دل : ؟

A.हलणे
A.Move
A.حرکت کرنا

B.धडधडणे
B.Throb
B.دھڑکنا

C.स्पंदणे
C.Pump
C.پمپ کرنا

D.थरथरणे
D.Quiver
D.تھرتھرانا

Answer: B.धडधडणे
B.Throb
B.دھڑکنا

85 दूध आणि पाण्याच्या 75 लिटर मिश्रणामध्ये, दूध आणि पाण्याचे गुणोत्तर 4:1 आहे. दूध आणि पाण्याचे गुणोत्तर 3:1 बनवण्यासाठी आवश्यक असलेले पाण्याचे प्रमाण काय असेल

In the 75 liters of mixture of milk and water, the ratio of milk and water is 4 : 1. The quantity of water required to make the ratio of milk and water 3 : 1 is

دودھ اور پانی کے 75 لیٹر کے مرکب میں، دودھ اور پانی کا تناسب 4 : 1ہے۔ دودھ اور پانی کا تناسب 3 : 1 کرنے کے لئے پانی کی کتنی مقدار ضروری ہے۔

A.1 लिटर्स
A.1 liters
A.1 لیٹر

B.3 लिटर्स
B.3 liters
B.3 لیٹر

C.4 लिटर्स
C.4 liters
C.4 لیٹر

D.5 लिटर्स
D.5 liters
D.5 لیٹر

Answer: D.5 लिटर्स
D.5 liters
D.5 لیٹر

86 एक चोर 10 मी/सेकंदच्या गतीने धावत आहे. पोलिस त्याच्या मागे 12.5 मी/सेकंद या गतीने धावला, पण पोलिसाने 10 सेकंदांनंतर धावणे सुरू केले. किती मीटरनंतर पोलिस त्या चोराला पकडू शकेल?

A thief runs at a speed of 10 m/s. A Policeman runs behind him at a speed of 12.5 m/sec, but after 10 seconds the Policeman had started running. After how many meters, will the Policeman catch the thief?

ایک چور 10 میٹر /سیکنڈ کی رفتار پر بھاگتا ہے۔ ایک پولیس اہلکار 12.5 میٹر / سیکنڈ کی رفتار پر اس کے پیچھے بھاگتا ہے، لیکن 10 سیکنڈ کے بعد پولیس اہلکار نے بھاگنا شروع کردیا۔ کتنے میٹر کے بعد، پولیس اہلکار چور کو پکڑ لے گا؟

A.600 मीटर
A.600 meters
A.600 میٹر

B.500 मीटर
B.500 meters
B.500 میٹر

C.400 मीटर
C.400 meters
C.400 میٹر

D.300 मीटर
D.300 meters
D.300 میٹر

Answer: B.500 मीटर
B.500 meters
B.500 میٹر

87 दिलेली अदलाबदल : चिन्हे आणि ×, तसेच आकडे 3 आणि 2 ; तर 5 + 2 ÷ 2 × 4 – 3 चे मूल्य किती ?

Given interchanges: signs - and ×, and numbers 3 and 2; then the value of 5 + 2 ÷ 2 × 4 - 3 is

دیئے گئے تبادلے: علامات - اور ×، اور نمبر 3 اور 2؛ تو 5 + 2 ÷ 2 × 4 - 3کی تعداد ہے

A.5
A.5
A.5

B.-2
B.-2
B.-2

C.4
C.4
C.4

D.-4
D.-4
D.-4

Answer: B.-2
B.-2
B.-2

88 एका विशिष्ट सांकेतिक भाषेमध्ये, जर STRUCTURE हा शब्द TVUYHZBZN असा कूटबध्द केला जात असेल, REMEDY हा शब्द त्या भाषेत कसा कूटबध्द केला जाईल?

In a certain code language, if the word STRUCTURE is coded as TVUYHZBZN, then how is the word REMEDY coded in that language?

ایک مخصوص ضابطے کی زبان میں، اگر لفظ STRUCTURE کو TVUYHZBZN لکھاجاتاہے، تو اس زبان میں لفظ REMEDY کو کیسے لکھاجائیگا؟

A.SGPIJE
A.SGPIJE
A.SGPIJE

B.SGPEJD
B.SGPEJD
B.SGPEJD

C.SGPIHE
C.SGPIHE
C.SGPIHE

D.SGPIIE
D.SGPIIE
D.SGPIIE

Answer: D.SGPIIE
D.SGPIIE
D.SGPIIE

89 Fill in the blank with the correct article.
I can't forget _____kindness with which he treated me.

A.the

B.a

C.an

D.No article required

Answer: A.the

90 आपल्या राष्ट्रध्वजाचे कल्पनाचित्रण यांनी केले

Our National Flag was designed by

ہمارا قومی جھنڈا کس نے ڈیزائن کیا تھا

A.पिंगला वेंकय्या
A.Pingala Venkayya
A.پنگلا وینکیا

B.श्रीमती सुरैय्या तय्यबजी
B.Mrs. Surayya Tayyabji
B.محترمہ ثریہ طیب جی

C.बद्रुद्दीन तय्यबजी
C.Badrauddin Tayyabji
C.بدرالدین طیب جی

D.ऍनी बेझंट
D.Annie Besant
D.اینی بسنت

Answer: A.पिंगला वेंकय्या
A.Pingala Venkayya
A.پنگلا وینکیا

91 DIRECTIONS: A sentence with an underlined word is given below. Find the word which is opposite in meaning to the underlined word from the given options.
The film contains violence and <u>abusive</u> language and is unsuitable for children.

A.Laudatory

B.Disrespectful

C.Vulgar

D.Offensive

Answer: A.Laudatory

92 **सूचना:** खालील प्रश्नात असे 3 घटक आहेत ज्यांचा परस्परांशी विशिष्ट संबंध आहे. समान संबंध वर्तुळाच्या संचांनी दर्शविलेला आहे, प्रत्येक वर्तुळ त्याचा आकार कितीही असला तरी, एका घटकाचे प्रतिनिधित्व करते. योग्य वर्तुळाच्या संचांशी खालील घटकांच्या जोड्या लावा

DIRECTION: The question below has three items having certain relationship among them. The same relationship is expressed by sets of circles, each circle representing one item irrespective of its size. Match the items with right set of circles.

ہدایت:مندرجہ ذیل سوال میں تین آئٹم ہیں جن کے مابین مختلف تعلقات ہیں۔ دائروں کے ایک سیٹ کے ذریعہ یکساں تعلق ظاہر کیا جاتا ہے، ہر دائرہ سائز سے قطع نظر ایک آئٹم کی نمائندگی کرتا ہے۔ آئٹم کو دائروں کے درست سیٹ کے ساتھ ملائیں۔

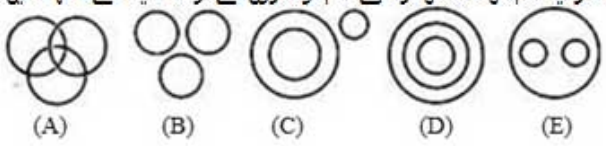

कार, आगगाडी, ऑटोमोबाइल
Car, Train, Automobile

کار، ٹرین، آٹوموبائل

A. (A)

B. (B)

C. (C)

D. (D)

Answer: C. (C)

93 Out of the four alternatives, choose the one which can be substituted for the given words/sentence.
A position requiring little or no work but giving the holder status or financial benefit

A.Sinecure

B.Veteran

C.Maiden

D.Drawn

Answer: A.Sinecure

94 DIRECTIONS: A sentence with an underlined phrasal verb is given below. Out of the four options, choose the one which can be substituted for the given phrasal Verb.
Every citizen of a democratic country ought to abide by the laws of the state.

A.violate

B.break

C.refuse

D.obey

Answer: D.obey

95 शिर्डी हे ठिकाण यांच्या मंदिरासाठी प्रसिद्ध आहे –

Shirdi is a place famous for the temple of –

شیرڈی کا مندر کس بھگوان / بزگ کےلے مشہور ہے_____

A.कृष्ण
A.Lord Krishna
A.لارڈ کرشنا

B.शिव
B.Lord Shiva
B.لارڈ شیوا

C.गणेश
C.Lord Ganesha
C.لارڈ گنیش

D.साई बाबा
D.Sai Baba
D.سائی بابا

Answer: D.साई बाबा
D.Sai Baba
D.سائی بابا

96 खालीलपैकी स्त्रीलिंगी शब्द ओळखा.

A.माता

B.पिता

C.काका

D.मामा

Answer: A.माता

97 खालीलपैकी कोणते शिकवण्याचे तंत्र आहे?

Which of the following is a teaching technique?

مندرجہ ذیل میں سے کونسی تدریس کی تکنیک ہے؟

A.मुलाखत
A.Interview
A.انٹرویو

B.टिपा तयार करणे
B.Note making
B.نوٹ کرنا

C.समीक्षा
C.Review
C.جائزہ لینا

D.वरील सर्व
D.All of these
D.مذکورہ تمام

Answer: D.वरील सर्व
D.All of these
D.مذکورہ تمام

98 जंगलतोडीचा सर्वात धोकादायक परिणाम हा आहे: -

The most dangerous effect of excessive deforestation is-

ضرورت سے زیادہ جنگلات کی کٹائی کا سب سے خطرناک پہلو

A.जंगल कमी होणे
A.Loss of forest
A. جنگل کا نقصان

B.इतर वनस्पतींचे नुकसान
B.Loss of other plants
B. دوسرے پودوں کا نقصان

C.वन्यप्राण्यांच्या वस्तीचा नाश
C.Destruction of habitat of wild animals
C. جنگلی جانوروں کے مسکن کی تباہی

D.जमिनीची अपक्षरण
D.Soil erosion
D. مٹی کا کٹاؤ

Answer: C.वन्यप्राण्यांच्या वस्तीचा नाश
C.Destruction of habitat of wild animals
C. جنگلی جانوروں کے مسکن کی تباہی

99 $\frac{(1+7)^2-(1-7)^2}{1\times 7}=?$

A. 5

B. 10

C. 4

D. 20

Answer: C. 4

100 सूचना: खालील प्रश्नांमध्ये दिलेल्या पर्यायांमधून संबंधित अक्षर समूह निवडा.

GRYD : YDGR :: EKSB : ?

DIRECTIONS: In the following question, select the related group of letters from the given alternatives.

GRYD : YDGR :: EKSB : ?

سمت: مندرجہ ذیل سوال میں، دیے گئے متبادل میں سے حروف کا متعلقہ گروپ منتخب کریں۔

GRYD : YDGR :: EKSB : ?

A.SKBE
A.SKBE
A.SKBE

B.SBKE
B.SBKE
B.SBKE

C.BSEK
C.BSEK
C.BSEK

D.SBEK
D.SBEK
D.SBEK

Answer: D.SBEK
D.SBEK
D.SBEK

101 कंप्यूटर हार्डवेअर वस्तू निवडा –

Pick a computer hardware object –

کسی کمپیوٹر ہارڈویئر کو چنیں

A.मदरबोर्ड
A.Motherboard
A.مدر بورڈ

B.फ्लॅश ड्राईव्ह
B.Flash drive
B.فلیش ڈرائیو

C.वरीलपैकी दोन्ही
C.Both of the above
C.اوپر کے دونوں

D.यांपैकी कोणतेही नाही
D.None of these
D.ان میں سے کوئی نہیں

Answer: C.वरीलपैकी दोन्ही
C.Both of the above
C.اوپر کے دونوں

102 शिकवणे ही तीनटोकी प्रक्रिया आहे कारण त्यामध्ये — चा समावेश आहे

The teaching is a tripolar process because it consists of—

تعلیم ایک سہ قطبی عمل ہے کیونکہ یہ --- پر مشتمل ہے-

A.मुल - शिक्षक - अभ्यासक्रम
A.Child - Teacher - Curriculum
A.بچہ - استاد - نصاب

B.शाळा - शिक्षक - मुल
B.School - Teacher - Child
B.اسکول - استاد – بچہ

C.मुल - पुस्तक - अभ्यास
C.Child - Book - Study
C.بچہ -کتاب – مطالعہ

D.मुल - पालक – मुख्याध्यापक
D.Child - Parents – Principal
D.بچے - والدین – پرنسپل

Answer: A.मुल - शिक्षक - अभ्यासक्रम
A.Child - Teacher - Curriculum
A.بچہ - استاد - نصاب

103 **सूचना**: खालील प्रश्नात उत्तरातील पर्यायांपैकी कोणत्या पर्यायी आकृतीत प्रश्नातील आकृती अंतर्भूत आहे?

DIRECTIONS: In the given question find the answer figure in which question figure is embedded.

ہدایات: دیئے گئے سوال میں جواب والی شکل دریافت کیجیئے جس میں سوال والی شکل سرایت کرگئی ہے

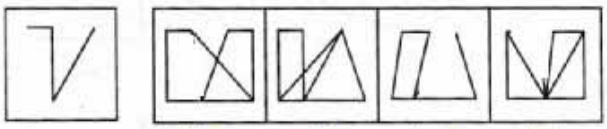

A. (A)

B. (B)

C. (C)

D. (D)

Answer: B. (B)

104 सूचना: अर्थपूर्ण परिच्छेद निर्माण करण्यासाठी, खाली दिलेली (P), (Q) (R), (S) आणि (T) ही पाच वाक्ये योग्य अनुक्रमाने पुनर्रचना करा; त्यांनतर खालील प्रश्नांची उत्तर द्या. P. कृष्णाने त्यांना त्यांचे डोळे बंद करायला सांगून जोपर्यंत सांगत नाही तोपर्यंत उघडू नये म्हणूनही सांगितले.
Q. ते खेळण्यात एवढे गुंग होते कि त्यांच्या सभोवती जंगलाला आग लागलायचे लक्षात आले नाही.
R. सर्वानी डोळे बंद केल्यानंतर कृष्णाने सर्व आग गिळून टाकली आणि सर्व मित्रांना आणि गायींना वाचविले.
S. एकदा कृष्ण आपल्या बालमित्रांसोबत गायी घेऊन घनदाट जंगलात गेला होता.
T. सर्वजण घाबरले आणि त्यांनी मदतीसाठी कृष्णाला विनवणी केली.

पुनर्रचना केल्यानंतर खालीलपैकी कोणते वाक्य दुसरे असेल?

DIRECTION: Rearrange the following five sentences (P), (Q), (R), (S) and (T) in the proper sequence to form a meaningful paragraph; then answer the questions given below them.
P. Krishna asked them all to close their eyes and not to open them until he asked them to do so
Q. They were so busy in their games that they did not realize a fire broke into the forest, all around them.
R. While everybody's eyes were closed Krishna swallowed all the fire and hence protected his friends and cows.
S. Once, Krishna and his friends went deep into the jungle with their cows.
T. Everybody was petrified and pleaded Krishna to help them.

Which of the following should be the SECOND sentence after rearrangement?

ہدایات: ان پانچ جملوں (P)، (Q)، (R)، (S) اور (T) کو با معنی پیرا بنانے کے لئے دوبارہ ترتیب دیجئے، پھر نیچے دے گئے سوالوں کے جواب دیجئے
P . کرشنا نے انسے کہا کہ وو سب اپنی آنکھیں بند کرے اور تب تک نہ کھولے جب تک وو نہ کہے.
Q. وو اپنے کھیل میں مصروف تھے کہ انکو احساس ہی نہی ہوا کہ انکے ارد گرد چاروں اور جنگل میں آگ لگ گی ہے.
R. جب سب کی آنکھیں بند تھی کرشنا نے ساری آگ نغل لی اور اس طرح اپنے دوستوں اور گائیں بچا لی.
S. ایک بار کرشنا اور اسکے دوست اپنی گائیں کے ساتھ جنگلکے اندھر چلے گے.
T. ہر کوئی ڈرا ہوا تھا اور کرشنا سے مدد کی التجا کر رہے تھے.

دوبارہ ترییب دینے کے بعد کون سا جملہ دوسرا ہونا چاہیے؟

A.Q
A.Q
A.Q

B.P
B.P
B.P

C.S
C.S
C.S

D.T
D.T
D.T

Answer: A.Q
A.Q
A.Q

105 खालीलपैकी कोणत्या जीवमंडल राखीवमध्ये समुद्री गायी आढळतात?

Sea-cow is found in which of the following biosphere reserve of India?

سمندری گائے بھارت کے درج ذیل بایواسفئر ریزرو میں پائی جاتی ہے؟

A.नॉक्रेक
A.Nokrek
A.نوریک

B.मन्नारचे आखात
B.Gulf of Mannar
B. منار کی خلیج

C.मानस
C.Manas
C. مناس

D.सुंदरबन
D.Sundarban
D.سندربن

Answer: B.मन्नारचे आखात
B.Gulf of Mannar
B. منار کی خلیج

106 आर्द्रता मोजण्यासाठी वापरले जाणारे एक साधन आहे:

An instrument used to measure humidity is:

وہ ایک آلہ جس سے رطوبت کی پیمائش کی جاتی ہے:

A.पवनवेगमापी
A.Anemometer
A.باد پیما

B.आर्द्रतामापी
B.Hygrometer
B.رطوبت پیما

C.तापमापी
C.Thermometer
C.تپش پیما

D.सूर्यऊर्जामापी
D.Pyrheliometer
D.دھوپ پیما

Answer:

B.आर्द्रतामापी
B.Hygrometer
B.رطوبت پیما

107

व्होल्ट कॉल _____यासोबत केला जाऊ शकतो

A VoLTE call can be made with –

ایک ولٹ (VoLTE) سے کیا جا سکتا ہے _____ کال

A.4G
A.4G
A.4G

B.3G
B.3G
B.3G

C.a आणि b दोन्ही
C.Both a and b
C.دونوں a اور b

D.4G, 3G आणि 2G
D.4G, 3G and 2G
D.4G, 3G اور G2

Answer:

A.4G
A.4G
A.4G

For More Info And Videos About TAIT-Exam Syllabus And Other Exam Visit My Channel
BADSHAHimp SubScribe Like & Share WWW.YouTube/BADSHAHimp

108 निर्देश: खाली दिलेल्या प्रतीक-अक्षर-संख्यांच्या क्रमाचा संदर्भ घेणार्या या प्रश्नांची उत्तरे द्या:

2 P J @ 8 $ L B 1 V # Q 6 & G W 9 K C D 3 ≥ * E 5 F R 7 A Y 4

दिलेल्या पर्यायांपैकी कोणते संख्या \अक्षर वर दिलेल्या व्यवस्थेच्या डावी कडून 14 व्या संख्या \अक्षर च्या डाव्या बाजूने 7 वे आहे?

DIRECTION: Answer these questions referring to the symbol-letter-number sequence given below:

2 P J @ 8 $ L B 1 V # Q 6 & G W 9 K C D 3 ≥ * E 5 F R 7 A Y 4

Which of the following is the seventh to the left of the fourteenth from the left end of the above arrangement?

ہدایت جیل کے سوال دے ہے نشانو اور نمبرس اور لفجونپر مشتمل ہیں

2 P J @ 8 $ L B 1 V # Q 6 & G W 9 K C D 3 ≥ * E 5 F R 7 A Y 4

اپری ترتیب مے الٹے ہتھکے باجو سے چودہوی حرف کے الٹے باجسے ساتوا حرف کونسا ہیں؟

A.L
A.L
A.L

B.8
B.8
B.8

C.V
C.V
C.V

D.यांपैकी कोणतीही नाही
D.None of these
D.انمسے کوئی نہیں

Answer: A.L
A.L
A.L

For More Info And Videos About TAIT-Exam Syllabus And Other Exam Visit My Channel
BADSHAHimp SubScribe Like & Share YouTube WWW.YouTube/BADSHAHimp

109 विधान:
विशिष्ट समुदायातील दंगलखोरांना व्यवस्थितपणे इतर समुदायांची संपत्ती नष्ट केली जाते.

कृतीचा कोर्स:
I. दंगलखोरांनी केलेल्या नुकसानाची भरपाई करण्यासाठी त्यांच्या मालमत्तेवर चढाई करावी.
II. ज्या कुटुंबांची संपत्ती नष्ट झाली होती त्यांना सरकारने पुरेशी नुकसान भरपाई द्यावी.

Statement:
The rioters belonging to certain community are systematically destroying property belonging to other community.

Course of actions:
I. The property of rioters should be attached for restoring the damage done by them.
II. Government should pay adequate compensation to families whose property was destroyed.

بیان:
ایک خاص کمیونٹی کی طرف سے فسادات میں دیگر کمیونٹیز کی املاک کو منظم طریقے سے تباہ کیا جارہا ہے۔

لائحہ عمل:
I۔ نقصان کے ازالے کے لیے حملہ کرنے والے افراد کی املاک پر حملہ کیا جانا چاہیے ۔
II۔ حکومت کو ایسے خاندانوں کو مناسب معاوضہ ادا کرنا چاہیے جن کی جائیداد تباہ کی گئی ہو ۔

A.फक्त I अनुसरून आहे
A.Only I follows
A. صرف I لاگو ہو گا۔

B.फक्त II अनुसरण करते आहे
B.Only II follows
B. صرف II لاگو ہو گا۔

C.एकतर I किंवा II अनुसरून आहे
C.Either I or II follows
C. I یا II میں سے ایک لاگو ہو گا۔

D.I किंवा II दोन्हीपैकी काहीही अनुसरण करत नाही
D.Both I and II follow
D. I اور II دونوں لاگو ہوں گے۔

Answer: D.I किंवा II दोन्हीपैकी काहीही अनुसरण करत नाही
D.Both I and II follow
D. I اور II دونوں لاگو ہوں گے۔

110 Out of the given options, choose the most appropriate one to fill in the blank.
A stone _____me on the head.

For More Info And Videos About TAIT-Exam Syllabus And Other Exam Visit My Channel
BADSHAHimp SubScribe Like & Share YouTube WWW.YouTube/BADSHAHimp

A.struck

B.have strike

C.has strike

D.have struck

Answer: A.struck

111 दिलेल्या मॅट्रिक्समधील गहाळ संज्ञा शोधा

Find the missing term in the given matrix.

نیچے سے گمنام ٹرم کو کھوجے

BD_3	CE_5	DF_{15}
EG_2	FH_4	GI_8
HJ_4	IK_6	?

(A) JL_{24}

(B) IJ_{18}

(C) JK_{18}

(D) JL_{12}

Answer: (A) JL_{24}

112 जगातील केवळ तरंगते राष्ट्रीय उद्यान आहे —

World's only floating National Park is in —

دنیا کا واحد تیرتا ہوا نیشنل پارک ہے -

A.मणिपूर
A.Manipur
A. منی پور

B.क्कालालंपुर
B.Kuala Lumpur
B. کوالالمپور

C.बिलासपूर
C.Bilaspur
C. بلاسپور

D.दिसपुर
D.Dispur
D.دسپور

Answer: A.मणिपूर
A.Manipur
A. منی پور

113 स्वभावावर आधारित, शिकवण्याचे — म्हणून वर्गीकरण केले जाऊ शकते

On the basis of Nature, the teaching can be classified as—

-فطرت کی بنیاد پر، تدریس کی درجہ بندی کی جا سکتی ہے

A.वर्णनात्मक - नैदानिक - उपचारात्मक
A.Descriptive - Diagnostic - Remedial
A.تشریحی - تشخیصی – معتبر

B.स्वीकारात्मक - प्रश्नोत्तरात्मक - स्पष्टीकरणात्मक
B.Assertive - Interrogative - Explanatory
B.محافظ - تحقیق – تشریح

C.मानसोपचारात्मक - परिणामकारक - संज्ञानात्मक
C.Psycho-motor - Affective - Cognitive
C.نفسیاتی ۔موٹر - مؤثر - سنجیدگی سے

D.वरील सर्व
D.All the above
D.مذکورہ تمام

Answer: A.वर्णनात्मक - नैदानिक - उपचारात्मक
A.Descriptive - Diagnostic - Remedial
A.تشریحی - تشخیصی – معتبر

114 ‘बंधू‘ या शब्दाचा समानार्थी शब्द कोणता ?

A.बंधन

B.बांध

C.बंधक

D.भ्राता

Answer: D.भ्राता

115 सूचना: दिलेल्या पर्यायांमधून वेगळे ते बाहेर काढा.

DIRECTIONS: Find the odd one out from the given alternatives.

سمت: دیے گئے متبادل میں سے بے جوڑ کو تلاش کرو۔

A.1P6
A.1P6
A.1P6

B.2Y4
B.2Y4
B.2Y4

C.2T0
C.2T0
C.2T0

D.1R8
D.1R8
D.1R8

Answer: B.2Y4
B.2Y4
B.2Y4

116 जर आचार्याला बाई म्हटले, बाईला मुलगी म्हटले, मुलीला बटलर म्हटले, बटलरला पोस्टमन म्हटले, आणि पोस्टमनला ड्रायव्हर म्हटले. तर खानावळीत अन्न कोण वाढेल?

If cook is called woman, woman is called girl, girl is called butler, butler is called postman and postman is called driver. Who serve food in a restaurant?

اگر باورچی کو عورت، عورت کو لڑکی، لڑکی کو بٹلر، بٹلر کو ڈاکیا اور ڈاکیے کو ڈرائیور کہا جائے تو ہوٹل میں کھانا کون لگاتا ہے؟

A.बाई
A.Woman
A.عورت

B.बटलर
B.Butler
B.بٹلر

C.पोस्टमन
C.Postman
C.ڈاکیا

D.ड्रायव्हर
D.Driver
D.ڈرائیور

Answer: C.पोस्टमन
C.Postman
C.ڈاکیا

117 Out of the given four words only one is spelt correctly. Find the word that is correctly spelt.

A.Business

B.Camoflage

C.Catagory

D.Collegue

Answer: A.Business

118 खालीलपैकी कोणती कार निर्मिती करणारी कंपनी नाही?

Which of the following is not a car-manufacturing company?

درج ذیل میں سے کون کار بنانے والی کمپنی نہیں ہے؟

A.टेस्ला
A.Tesla
A.ٹیسلا

B.ऑडी
B.Audi
B.آڈی

C.स्कोडा
C.Skoda
C.اسکوڈا

D.यांपैकी कोणतेही नाही
D.None of these
D.ان میں سے کوئی نہیں

Answer: A.टेस्ला
A.Tesla
A.ٹیسلا

119 खालीलपैकी कोणती एक बाग नाही, जरी त्याला बाग म्हणतात?

Which of the following is not a garden, though it is known as a garden?

مندرجہ ذیل میں سے کون اگرچہ ایک باغ کے طور پر جانا جاتا ہے، بکہ وہ باغ نہیں ہے؟

A.मुंबईचे हँगिंग गार्डन
A.Hanging Garden of Mumbai
A. ممبئی کے ہینگنگ گارڈن

B.मैसूरमधील वृंदावन गार्डन
B.Vrindavan Garden of Mysore
B. میسور کا ورنداون گارڈن

C.मुंबईतील खुस्रोगार्डन
C.Khusro Garden of Mumbai
C. ممبئی کا خسرو گارڈن

D.कोलकात्याचे ईडनगार्डन
D.Eden Garden of Kolkata
D. کولکتہ کا ایڈن گارڈن

Answer: D.कोलकात्याचे ईडनगार्डन
D.Eden Garden of Kolkata
D. کولکتہ کا ایڈن گارڈن

120 सूचना: या प्रश्नांमध्ये पर्याय A आणि B यांच्या सहित दोन विधाने दिलेली आहेत. जरी सामान्यपणे माहीत असलेल्या तथ्यांबरोबर जुळत नसले तरी खालील विधाने बरोबर आहेत असे समजून तुमचे योग्य उत्तर लिहा:
सर्व रिंग पंख आहेत.
सर्व पंख राजे आहेत. म्हणून,
A: सर्व रिंग राजे आहेत.
B: सर्व राजे रिंग आहेत.

DIRECTION: In these questions, two statements are given, followed by two inferences A and B. Assume the statements to be true even if they are at variance with the known facts and then mark your answer as:

All rings are wings.
All wings are kings. So,
A: All rings are kings.
B: All kings are rings.

ہدایت:ان سوالات میں، دو بیانات دیے گئے ہیں، جن کے بعد دو تجاویز A اور B دیے گئے ہیں۔ بیانات کے درست ہونے کو تسلیم کریں اگرچہ وہ عام طور پر معلوم حقائق کے برعکس ہوں اور پھر اس کے مطابق اپنا جواب نشان زد کریں:

سبھی انگوٹھیاں پنکھ ہیں۔
سبھی پنکھ راجا ہیں۔ لہذا،

A: سبھی انگوٹھیاں راجا ہیں۔
B: سبھی راجا انگوٹھیاں ہیں۔

A.जर केवळ पर्याय (A) असल्यास.
A.If only inference (A) follows
A.صرف تجویز (A) پیروی کرتا ہے۔

B.जर केवळ पर्याय (B) असल्यास.
B.If only inference (B) follows
B.صرف تجویز (B) پیروی کرتا ہے۔

C.जर दोन्ही पर्याय (A) आणि (B) असल्यास.
C.If both (A) and (B) follow
C.(A) اور (B) دونوں پیروی کرتے ہیں۔

D.जर दोन्ही पर्याय (A) आणि (B) नसल्यास.
D.If neither (A) nor (B) follows
D.نہ تو (A) نہ ہی (B) پیروی کرتے ہیں۔

Answer: A.जर केवळ पर्याय (A) असल्यास.
A.If only inference (A) follows
A.صرف تجویز (A) پیروی کرتا ہے۔

121 प्रकाशसंश्लेषण दरम्यान कोणती उर्जा परिवर्तीत होते?

Which type of energy transformation occurs during Photosynthesis?

فوٹوسینتھیسزکے درمیان کس طرح کےتوانائی کی تبدیلی ہوتی ہے؟

A.रासायनिक उर्जाविकिरणित ऊर्जेमध्ये.
A.Chemical Energy into Radiated Energy
A.کیمیائی انرجی کو تابکاری انرجی کی طرف

B.रासायनिक उर्जायांत्रिक ऊर्जेमध्ये
B.Chemical energy into mechanical Energy
B.کیمیائی انرجی میکانیکی انرجی کی طرف

C.सौर उर्जा रासायनिक ऊर्जेमध्ये
C.Solar Energy into Chemical Energy
C.سولر انرجی کیمیائی انرجی کی طرف

D.यांत्रिक उर्जा सौर ऊर्जेमध्ये.
D.Mechanical Energy into Solar Energy
D.میکانیکی انرجی سولر انرجی کی طرف

Answer: C.सौर उर्जा रासायनिक ऊर्जेमध्ये
C.Solar Energy into Chemical Energy
C.سولر انرجی کیمیائی انرجی کی طرف

122 असफल होण्याची जाणीव किंवा ध्येय वाटप करतांना अडथळा म्हणजे

Feeling of failure or obstacle in allotment of goals is called as

اہداف کی آلودگی میں ناکامی یا رکاوٹ محسوس کرنے کے طور پر کہا جاتا ہے

A.निराशा
A.Frustration
A.مایوسی

B.असफलता
B.Failure
B.ناکامی

C.उदासिनता
C.Depression
C.ڈپریشن

D.प्रक्षेपण
D.Projection
D.پروجیکشن

Answer: A.निराशा
A.Frustration
A.مایوسی

123 आपण जर 9 काप करून घन कापले तर असे किती लहान घन मिळतात, जे X, Y आणि Z या तीन बाजूंमध्ये समान प्रकारे वितरीत आहेत?

How many small cubes are obtained when we cut the cube using 9 cuts, which are distributed evenly in the three planes X, Y and Z?

تینوں پلین میں ہم پلہ ہوں؟ X-Y-Z جب ہم کیوب میں 9 کٹ لگاتے ہیں تو کتنے چھوڑے ٹکڑے حاصل ہوتے ہیں جو

A.49
A.49
A.49

B.64
B.64
B.64

C.81
C.81
C.81

D.27
D.27
D.27

Answer: B.64
B.64
B.64

124 सूचना: अर्थपूर्ण परिच्छेद निर्माण करण्यासाठी, खाली दिलेली (P), (Q) (R), (S) आणि (T) ही पाच वाक्ये योग्य अनुक्रमाने पुनर्रचना करा; त्यांनतर खालील प्रश्नांची उत्तर द्या. P. कृष्णाने त्यांना त्यांचे डोळे बंद करायला सांगून जोपर्यंत सांगत नाही तोपर्यंत उघडू नये म्हणूनही सांगितले.
Q. ते खेळण्यात एवढे गुंग होते कि त्यांच्या सभोवती जंगलाला आग लागलायचे लक्षात आले नाही.
R. सर्वानी डोळे बंद केल्यानंतर कृष्णाने सर्व आग गिळून टाकली आणि सर्व मित्रांना आणि गायींना वाचविले.
S. एकदा कृष्ण आपल्या बालमित्रांसोबत गायी घेऊन घनदाट जंगलात गेला होता.
T. सर्वजण घाबरले आणि त्यांनी मदतीसाठी कृष्णाला विनवणी केली.

पुनर्रचना केल्यानंतर खालीलपैकी कोणते वाक्य चौथे असेल?

DIRECTION: Rearrange the following five sentences (P), (Q), (R), (S) and (T) in the proper sequence to form a meaningful paragraph; then answer the questions given below them.
P. Krishna asked them all to close their eyes and not to open them until he asked them to do so
Q. They were so busy in their games that they did not realize a fire broke into the forest, all around them.
R. While everybody's eyes were closed Krishna swallowed all the fire and hence protected his friends and cows.
S. Once, Krishna and his friends went deep into the jungle with their cows.
T. Everybody was petrified and pleaded Krishna to help them.

Which of the following should be the FOURTH sentence after rearrangement?

ہدایات: ان پانچ جملوں (P)، (Q)، (R)، (S) اور (T) کو با معنی پیرا بنانے کے لئے دوبارہ ترتیب دیجئے، پھر نیچے دے گئے سوالوں کے جواب دیجئے
P . کرشنا نے انسے کہا کہ وو سب اپنی آنکھیں بند کرے اور تب تک نہ کھولے جب تک وو نہ کہے.
Q. وو اپنے کھیل میں مصروف تھے کہ انکو احساس ہی نہی ہوا کہ انکے ارد گرد چاروں اور جنگل میں آگ لگ گی ہے.
R. جب سب کی آنکھیں بند تھی کرشنا نے ساری آگ نغل لی اور اس طرح اپنے دوستوں اور گائیں بچا لی.
S. ایک بار کرشنا اور اسکے دوست اپنی گائیں کے ساتھ جنگلکے اندھر چلے گے.
T. ہر کوئی ڈرا ہوا تھا اور کرشنا سے مدد کی التجا کر رہے تھے.

دوبارہ ترییب دینے کے بعد کون سا جملہ چوتھا ہونا چاہیے؟

A.P
A.P
A.P

B.Q
B.Q
B.Q

C.R
C.R
C.R

D.S
D.S
D.S

Answer: A.P
A.P
A.P

125 आपल्या वर्तनास कारणीभूत ठरणाऱ्या मूलभूत इच्छा

The fundamental drives that motivates our behavior

بنیادی تحریک جو ہمارے برتاو کو ترغیب دیتی ہے

A.कामेच्छा व दमन
A.Sex and repression
A.جنسی خواہش اور گھٹن

B.कॅरोल्स
B.Carols
B.کیرولس

C.कामेच्छा व आक्रमकता
C.Sex and aggression
C.جنسی خواہش اور جارحیت

D.आपली मानसिक प्रक्रिया
D.our psychological processing
D.ہماری نفسیاتی عمل

Answer: C.कामेच्छा व आक्रमकता
C.Sex and aggression
C.جنسی خواہش اور جارحیت

126 **सूचना**: दिलेल्या पर्यायांमधून श्रेणी पूर्ण करणारी योग्य आकृती निवडा.

DIRECTIONS: Complete the series by choosing right figure from the given choices.

ہدایات: دیئے گئے اختیارات میں صحیح شکل کا انتخاب کر کے سیریز کو مکمل کیجیئے۔

Problem Figures

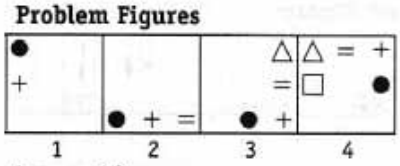

Answer Figures

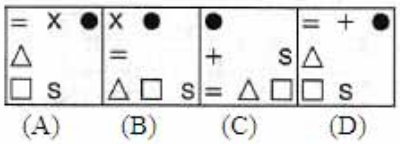

A. (A)

B. (B)

C. (C)

D. (D)

Answer: D. (D)

127 शिक्षण प्रक्रियेमध्ये विद्यार्थ्याला अवलंबित चलन मानले जाते कारण

The student is treated as a Dependent Variable in teaching process because—

اساتذہ کو تدریس کے عمل میں ایک منحصر متغیر کے طور پر ٹریٹ کیا جاتا ہے،

A.विद्यार्थी शिक्षकाचा उपदेश पाळतो
A.The student follows the teacher’s advice
A.طالب علم ٹیچر کے مشورہ کے مطابق عمل کرتا ہے

B.विद्यार्थी शिक्षकाच्या शिकवणीप्रमाणे शिकतो
B.The student learns according to teacher’s teaching
B.طالب علم ٹیچر کی تعلیم کے مطابق سیکھتا ہے

C.विद्यार्थी शिक्षकाला मूर्ख बनवतो
C.The student makes teacher a fool
C.طالب علم استاد کو بیوقوف بنا دیتا ہے

D.विद्यार्थ्यावर शिक्षकाकडून दबाव आणला जातो
D.The student is pressurized by the teacher
D.طالب علم پر استاد کی طرف سے زور دیا جاتا ہے

Answer: B.विद्यार्थी शिक्षकाच्या शिकवणीप्रमाणे शिकतो
B.The student learns according to teacher’s teaching
B.طالب علم ٹیچر کی تعلیم کے مطابق سیکھتا ہے

128 852, 1065 आणि 1491 ला पूर्णपणे भाग जाणारी सर्वांत मोठी संख्या काय असेल?

What is the greatest number that divides 852, 1065 and 1491 exactly?

852، 1065 اور 1491کو بالکل تقسیم کرنے والی سب سے بڑی تعداد کیا ہے؟

A.193
A.193
A.193

B.183
B.183
B.183

	C.223 C.223 C.223
	D.213 D.213 D.213
Answer:	D.213 D.213 D.213

129	DIRECTIONS: A sentence with an underlined phrasal verb is given below. Out of the four options, choose the one which can be substituted for the given phrasal Verb. Our culture has been handed down to us from ancient times.
	A.passed on
	B.kept
	C.withheld
	D.discouraged
Answer:	A.passed on

130 सूचना: प्रत्येक प्रश्नात दोन विधाने आहेत ज्यांच्या नंतर दोन निष्कर्ष आहेत ज्यांना I आणि II असे अंकित केले आहे. सर्वसामान्यपणे ज्ञात असलेल्या तथ्यांशी विसंगती असली तरीही, हे सत्य असल्याचे तात्पुरते मानून, सामान्यतः ज्ञात असलेल्या तथ्यांकडे दुर्लक्ष करून, दिलेल्या निष्कर्षांपैकी कोणती तर्कशुद्धपणे विधानांचे अनुसरण करतात ते ठरवा.
विधाने :
सर्व विवाह लेख असतात.
सर्व विवाह वायरिंग असतात.
निष्कर्ष:
I. काही लेख वायरिंग असतात.
II. सर्व लेख वायरिंग असतात.

DIRECTION: Each of these questions consist of two statements followed by two conclusions marked I and II. Consider the statements to be true, even though they seem to be t variance with the commonly known facts and find out which of the given conclusion (s) logically follow (s) the statements, disregarding the commonly known facts.

Statements:
All weddings are writings.
All weddings are wirings.

Conclusions:
I. Some writings are wirings.
II. All writings are wirings.

سے نشان زد کیا گیا ہے۔ بیانات II اور I ہدایت:ان میں سے ہر ایک سوال دو بیانات پر مشتمل ہے جس کے بعد دو نتائج دیے گئے ہیں جنھیں کے درست ہونے پر غور کریں، اگرچہ وہ عام طور پر معلوم حقائق کے برعکس نظر آتے ہوں اور تلاش کریں کہ کون سے دیے گئے نتائج منطقی طور پر بیانات کی پیروی کرتے ہیں، عام طور پر معلوم حقائق سے قطع نظر۔

بیانات:
تمام شادیاں تحریریں ہیں۔
تمام شادیاں وائرنگ ہیں۔

حل:
I. کچھ تحریریں وائرنگ ہیں۔
II. تمام تحریریں وائرنگ ہیں۔

A.जर केवळ निष्कर्ष I निघत असल्यास.
A.If only I follows
A.صرف I پیروی کرتا ہے۔

B.जर केवळ निष्कर्ष II निघत असल्यास.
B.If only II follows
B.صرف II پیروی کرتا ہے۔

C.जर दोन्ही निष्कर्ष I आणि II निघत नसल्यास.
C.If neither I nor II follows
C.نہ تو I نہ ہی II پیروی کرتا ہے

D.जर दोन्ही निष्कर्ष I आणि II निघत असल्यास.
D.If both I and II follow
D.I اور II دونوں پیروی کرتے ہیں

Answer: A.जर केवळ निष्कर्ष I निघत असल्यास.
A.If only I follows
A.صرف I پیروی کرتا ہے۔

131 निर्देश: खाली दिलेले प्रश्न वर्ण मालिकेवर आधारित आहेत. या प्रत्येक मालिकेत, काही अक्षरे गहाळ आहेत. योग्य पर्याय निवडा पाच पेक्षा अधिक अक्षरे गहाळ असल्यास, मालिकेतील शेवटचे पाच अक्षरे निवडा .

abc - ea - - d- - bcd - - - - - -

DIRECTION: Questions given below are based on the letter series. In each of these series, some letters are missing. Select the correct alternative. If more than five letters are missing, select the last five letters of the series:

abc - ea - - d- - bcd - - - - - -

ہدایت نیچے دے ہے سوالات حرف سرج پر مشتمل ہیں . ہر میں کہیں حرف گمشدہ ہے . سہی اختیارات کو چنے . اگر پچ حرف گنمام ہو تو آخری پانچ حرفونکو چنے

abc - ea - - d- - bcd - - - - - -

A.bbbbb
A.bbbbb
A.bbbbb

B.abcde
B.abcde
B.abcde

C.dcbbb
C.dcbbb
C.dcbbb

D.यापैकी एकही नाही
D.None of these
D.ان میں سے کوئی نہیں

Answer: B.abcde
B.abcde
B.abcde

132 सूचना : खालील प्रत्येक प्रश्नात दोन विधाने I आणि II दिलेले आहेत. हे विधान एकतर स्वतंत्र कारण असू शकतात किंवा स्वतंत्र कारणांचे परिणाम असू शकतात. यांपैकी एक विधान इतर विधानाचा परिणाम असू शकतो. दोन्ही विधाने वाचा आणि खालीलपैकी कोणत्या उत्तराचा पर्याय या दोन्ही विधानांमधील संबंधांचे वर्णन करतो ते ठरवा.
विधान :
I. X राज्यामध्ये शाळा सोडून देणाऱ्या विद्यार्थ्यांची संख्या ही जास्त आहे.
II. X राज्यामध्ये शिक्षकांची गुणवत्ता कमी आहे.

DIRECTIONS: Below in each question are given two statements I and II. These statements may be either independent causes or may be effects of independent causes. One of these statements may be the effect of the other statement. Read both the statements and decide which of the following answer choice correctly depicts the relationship between these two statements.

Statements:
I. The number of school dropouts in State X is high.
II. The quality of teachers in State X is low.

ہدایات: نیچے ہر سوال میں دو بیانات I اور II آ تو یہ بیانات یا تو آزاد وجوہات یا پھر آزاد وجوہات کے اثرات ہو سکتے ہیں۔ انہیں گئے ہیں۔ دونوں بیانات پڑھیں اور فیصلہ کریں کہ نیچے دیے گئے کس جواب کا انتخاب ان بیانات میں سے ایک بیان دوسرے کا اثر ہو سکتا ہے۔ دونوں بیانات کے در میان تعلق کو ٹھیک سے ظاہر کرتا ہے۔

بیانات:
I –X ریاست میں اسکول چھوڑنے والوں کی تعداد بہت زیادہ ہے۔
II - X ریاست میں اساتذہ کی قابلیت کا معیار کم ہے۔

A.विधान I कारण आहे आणि विधान II त्याचा परिणाम आहे;
A.Statement I is the cause and statement II is its effect;
A.بیان نمبر I وجہ ہے اور بیان نمبر II اس کا اثر ہے۔

B.विधान II कारण आहे आणि विधान I
B.Statement II is the cause and statement I is its effect;
B.بیان نمبر II وجہ ہے اور بیان نمبر I اس کا اثر ہے۔

C.विधान I आणि II दोन्ही स्वतंत्र कारणे आहेत;
C.Both the statements I and II are independent causes;
C. دونوں بیانات نمبر I اور نمبر II آزاد وجوہات ہیں۔

D.विधान I आणि II दोन्ही स्वतंत्र कारणांचे परिणाम आहेत;
D.Both the statements I and H are effects of independent causes;
D. دونوں بیانات نمبر I اور نمبر II آزاد وجوہات کے اثرات ہیں۔

Answer: B.विधान II कारण आहे आणि विधान I
B.Statement II is the cause and statement I is its effect;
B.بیان نمبر II وجہ ہے اور بیان نمبر I اس کا اثر ہے۔

133 शिक्षकाने —च्या वर्गामध्ये शिक्षणाची पातळी विचारापर्यंत नेण्यासाठी सानुकूल प्रयत्न केले पाहीजेत

The teacher should do the favourable efforts in order to raise the teaching upto the thinking level in a class of—

اساتذہ کو اپنی مرضی کے مطابق کوششوں کو کرنا چاہئے تاکہ تدریس کی سطح کو سوچنے کی سطح تک بڑھایا جا سکے.

A.प्रतिभावान विद्यार्थी
A.Gifted students
A.گفٹڈ طلباء

B.सर्वसामान्य विद्यार्थी
B.Normal students
B.عام طالب علم

C.मानसिकरित्या गतीमंद विद्यार्थी
C.Mentally retarded students
C.دماغی طور پر ریٹارڈ طلباء

D.कोणत्याही भेदभावाशिवाय सर्व विभाग
D.All sections without discrimination
D.امتیازی سلوک کے بغیر تمام حصے

Answer: A.प्रतिभावान विद्यार्थी
A.Gifted students
A.گفٹڈ طلباء

134 **सूचना**: खालील प्रश्नात उत्तरातील पर्यायांपैकी कोणत्या पर्यायी आकृतीत प्रश्नातील आकृती अंतर्भूत आहे?

DIRECTIONS: In the given question find the answer figure in which question figure is embedded.

ہدایات: دیئے گئے سوال میں جواب والی شکل دریافت کیجیئے جس میں سوال والی شکل سرایت کرگئی ہے

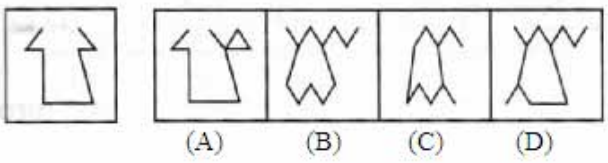

A. (A)

B. (B)

C. (C)

D. (D)

Answer: A. (A)

135 एका रकमेवरील 5% प्रति वर्ष दराने 2 वर्ष आणि 3 वर्षांसाठीचे सरळ व्याज हे अनुक्रमे रू. 100 आणि रू.150 आहे. मुद्दल काढा.

The simple interest on an amount at the rate of 5% per annum for 2 years and 3 years are respectively Rs.100 and Rs.150. Find principal.

ایک رقم کا سود مفرد5% سالانہ کی در سے 2 اور 3 سال کے لیئے با لترتیب 100 اور 150 روپیہ ہے . اصل معلوم کریں.

A.1200
A.1200
A.1200

B.8000
B.8000
B.8000

C.5000
C.5000
C.5000

D.1000
D.1000
D.1000

Answer: D.1000
D.1000
D.1000

136 कैलाश सत्यार्थी हे प्रख्यात _____आहेत

Kailash Satyarthi is an eminent –

کیلاش سیتارتھی ایک مشہور _____ ہیں

A.पत्रकार
A.Journalist
A. جرنسلٹ

B.राजकारणी
B.Politician
B.سیاستداں

C.सामाजिक कार्यकर्ता
C.Social Worker
C.سماجی کارکن

D.गायक
D.Singer
D.سنگر

Answer: C.सामाजिक कार्यकर्ता
C.Social Worker
C.سماجی کارکن

137 प्रथमोपचार स्थितीमध्ये, सर्वांत महत्त्वाची व्यक्ती कोण असते

In a first aid situation, the most important person is the

فرسٹ ایڈ حالت میں، سب سے اہم شخص ہے

A.आणीबाणी सेवा
A.The emergency services
A.ایمرجنسی سروسز

B.दर्शक
B.Bystanders
B.اس پاس کھڑے لوگ

C.तुम्ही स्वत:
C.Yourself
C.خود آپ

D.जखमी व्यक्ती
D.The injured casualty
D.زخمی افراد

Answer: C.तुम्ही स्वत:
C.Yourself
C.خود آپ

138 सूचना: दिलेल्या पर्यायांमधून वेगळे ते बाहेर काढा.

DIRECTIONS: Find the odd one out from the given alternatives.

سمت: دیے گئے متبادل میں سے بے جوڑ کو تلاش کرو۔

A.मुलगा
A.Boy
A.لڑکا

B.मुलगी
B.Girl
B.-لڑکی

C.पुरुष
C.Man
C.-آدمی

D.मूल
D.Child
D.بچہ

Answer: D.मूल
D.Child
D.بچہ

139 तोंडी चाचणीमध्ये .....व ..... ला चाचणी घटक म्हणून वापरले जाते

The now verbal test use _____ & _____ as test items

موجودہ دور کے صوتی جانچ (وربل ٹسٹ) میں _____ اور _____ کو جانچ آلات کے طور پر بروئے کار لایا جاتا ہے:

A.दृकश्राव्य आणि व्याख्यान
A.Audio & Lectures
A.آڈیو اور لکچرز

B.छायाचित्रे आणि चित्रांकन
B.Pictures & Illustration
B.تصویر اور الیسٹریشن

C.(a) आणि (b) दोन्ही
C.Both (a) & (b)
C.a اور b دونوں

D.यापैकी एकही नाही
D.None of these
D.ان میں سے کوئی نہیں

Answer: B.छायाचित्रे आणि चित्रांकन
B.Pictures & Illustration
B.تصویر اور الیسٹریشن

140 Out of the given options, choose the one which is the correct indirect speech of the sentence given below.
The teacher said, “Be quiet and listen to my words.”

A.The teacher urged them to be quiet and listen to his words.

B.The teacher urges them to keep quiet and be listening to his words.

C.The teacher urges them to be quiet and keep listening to his words.

D.The teacher urges them to remain quiet and keep listening his words.

Answer: A.The teacher urged them to be quiet and listen to his words.

141 गतिवर्धन (दुप्पट बढती) — च्या बाबतीत सर्वात जास्त प्रभावी असल्याचे दिसून येते

Acceleration (Double promotion) appears most effective in the case of—

تیز رفتار (ڈبل فروغ) --- کے معاملے میں سب سے زیادہ مؤثر ثابت ہوتا ہے-

A.आयक्यू 132च्या वर असलेली सर्व मुले
A.All children with IQ's above 132
A.132 آئی کیو کی اوپر کے تمام بچے

B.आयक्यू 140 च्या वर असलेली जवळजवळ सर्व मुले
B.Nearly all children with IQ's above 140
B.140 سے زائد آئی کیو کے ساتھ تقریبا تمام بچے

C.सर्व हुशार मुले ज्यांना त्यांच्या वर्तमान वर्गाच्या स्थितीशी जुळवून घेणे कठीण जात आहे
C.All bright children who are finding it difficult to adjust to their present classroom situation
C.تمام ذہین بچے جو اپنی موجودہ کلاس روم کی صورت حال کو ایڈجسٹ کرنے میں دشواری محسوس کر رہے ہیں

D.काही थोडी मुले जी त्यांच्या वयाच्या मित्रांच्या संबंधाने एकूण सर्वांगीण परिपक्वता दर्शवतात
D.A few children who show all-round maturity in a relevance of their age- mates.
D.چند بچے جو اپنیہم عمروں کے مطابق پوری طرح کی پختگی کو ظاہر کرتے ہیں.

Answer: D.काही थोडी मुले जी त्यांच्या वयाच्या मित्रांच्या संबंधाने एकूण सर्वांगीण परिपक्वता दर्शवतात
D.A few children who show all-round maturity in a relevance of their age- mates.
D.چند بچے جو اپنیہم عمروں کے مطابق پوری طرح کی پختگی کو ظاہر کرتے ہیں.

142 सूचना: अर्थपूर्ण परिच्छेद निर्माण करण्यासाठी, खाली दिलेली (P), (Q) (R), (S) आणि (T) ही पाच वाक्ये योग्य अनुक्रमाने पुनर्रचना करा; त्यांनतर खालील प्रश्नांची उत्तर द्या. P. कृष्णाने त्यांना त्यांचे डोळे बंद करायला सांगून जोपर्यंत सांगत नाही तोपर्यंत उघडू नये म्हणूनही सांगितले.
Q. ते खेळण्यात एवढे गुंग होते कि त्यांच्या सभोवती जंगलाला आग लागलायचे लक्षात आले नाही.
R. सर्वानी डोळे बंद केल्यानंतर कृष्णाने सर्व आग गिळून टाकली आणि सर्व मित्रांना आणि गायींना वाचविले.
S. एकदा कृष्ण आपल्या बालमित्रांसोबत गायी घेऊन घनदाट जंगलात गेला होता.
T. सर्वजण घाबरले आणि त्यांनी मदतीसाठी कृष्णाला विनवणी केली.

पुनर्रचना केल्यानंतर खालीलपैकी कोणते वाक्य पहिले असेल?

DIRECTION: Rearrange the following five sentences (P), (Q), (R), (S) and (T) in the proper sequence to form a meaningful paragraph; then answer the questions given below them.
P. Krishna asked them all to close their eyes and not to open them until he asked them to do so
Q. They were so busy in their games that they did not realize a fire broke into the forest, all around them.
R. While everybody's eyes were closed Krishna swallowed all the fire and hence protected his friends and cows.
S. Once, Krishna and his friends went deep into the jungle with their cows.
T. Everybody was petrified and pleaded Krishna to help them.

Which of the following should be the FIRST sentence after rearrangement?

ہدایات: ان پانچ جملوں (P)، (Q)، (R)، (S) اور (T) کو با معنی پیرا بنانے کے لئے دوبارہ ترتیب دیجئے، پھر نیچے دے گئے سوالوں کے جواب دیجئے
P . کرشنا نے انسے کہا کہ وو سب اپنی آنکھیں بند کرے اور تب تک نہ کھولے جب تک وو نہ کہے.
Q. وو اپنے کھیل میں مصروف تھے کہ انکو احساس ہی نہی ہوا کہ انکے ارد گرد چاروں اور جنگل میں آگ لگ گی ہے.
R. جب سب کی آنکھیں بند تھی کرشنا نے ساری آگ نغل لی اور اس طرح اپنے دوستوں اور گائیں بچا لی.
S. ایک بار کرشنا اور اسکے دوست اپنی گائیں کے ساتھ جنگلکے اندھر چلے گے.
T. ہر کوئی ڈرا ہوا تھا اور کرشنا سے مدد کی التجا کر رہے تھے.

دوبارہ ترییب دینے کے بعد کون سا جملہ پہلے ہونا چاہیے؟

A.S
A.S
A.S

B.P
B.P
B.P

C.Q
C.Q
C.Q

D.R
D.R
D.R

Answer: A.S
A.S
A.S

143 Out of the given options, choose the one which is the correct passive voice of the sentence given below.
Can I solve these sums?

A.Can these sums be solved by me?

B.Will these sums be solve by me?

C.Shall these sums be solved with me?

D.Would these sums be solved from me?

Answer: A.Can these sums be solved by me?

144 Out of the given four words only one is not spelt correctly. Find the word that is not correctly spelt.

A.Begining

B.Burden

C.Bizarre

D.Bellwether

Answer: A.Begining

145 उत्तम समायोजनेची मूलभूत विशिष्टता म्हणजे

The fundamental characteristic of good adjustment is—

اچھی ایڈجسٹمنٹ کی بنیادی خصوصیت ہے-

A.एखाद्याच्या लक्ष्य संपादन करण्याच्या उपायांविषयी तीव्र अंतर्दृष्टी
A.A keen insight into means of attaining one's goals
A.اپنے مقاصد کو حاصل کرنے کے ذریعہ ایک گہری بصیرت

B.उद्देश आणि लक्ष्य यांची ठोस आणि भरीव प्रणाली
B.A sound and wholesome system of motives and goals
B.مقاصد اور اہداف کا ایک مضبوط اور بہترین انتظام

C.वरील दोन्ही
C.Both of the above
C.مندرجہ بالا دونوں

D.वरीलपैकी कोणतेही नाही
D.None of the above
D.اوپر سے کوئی بھی نہیں

Answer: C.वरील दोन्ही
C.Both of the above
C.مندرجہ بالا دونوں

146 खालीलपैकी शुद्ध वाक्य कोणते ?

A.भारत माझा देश आहे.

B.सारे भारतीय माझे बांधव आहे.

C.माझ्या देशांवर माझे प्रेम आहे.

D.वरील सर्व

Answer: A.भारत माझा देश आहे.

147 पुढील जोडशब्द पूर्ण करा . ‘ नोकर ----------’

A.भाकर

B.चाकर

C.मालक

D.भाषा

Answer: B.चाकर

148 'R' हा 'T' चा भाऊ आहे. 'M' ही 'R' ची बहीण आहे. 'K' हा 'M' चा भाऊ आहे. 'W' हा 'T' चा वडील आहे. मग 'W' ला किती मुले आहेत ?

R' is the brother of 'T'. 'M' is the sister of 'R'. 'K' is the brother of 'M'. 'W' is the father of 'T'. How many sons does 'W' have ?

T ' 'R' کا بھائی ہے. 'R' 'M' کی بہن ہے. 'M' 'K' کا بھائی ہے. 'T' 'W' کا باپ ہے. 'W' کے کتنے بیٹے ہے؟

A.दोन
A.Two
A.دو

B.तीन
B.Three
B.تین

C.एक
C.One
C.ایک

D.माहिती अपुरी आहे
D.Data insufficient
D.ڈیٹا ناکافی

Answer: D.माहिती अपुरी आहे
D.Data insufficient
D.ڈیٹا ناکافی

149 Out of the given options which best expresses the meaning of the given Proverb?
The grass is always greener on the other side of the hill.

A.People cover huge distances in order to be near greenery

B.People tend to want whatever they don't have

C.Grass grows best in hilly areas

D.Hilly areas are always full of green grass

Answer: B.People tend to want whatever they don't have

150 सूचना: दिलेल्या पर्यायांमधून वेगळे ते बाहेर काढा.

DIRECTIONS: Find the odd one out from the given alternatives.

سمت: دیے گئے متبادل میں سے بے جوڑ کو تلاش کرو۔

A.42624
A.42624
A.42624

B.37573
B.37573
B.37573

C.84284
C.84284
C.84284

D.93339
D.93339
D.93339

Answer: C.84284
C.84284
C.84284

151 जर घड्याळामध्ये 12:23 वाजले असतील. तर आरशामध्ये काय वेळ आहे?

If the time in clock is 12:23. What is the time in the mirror?

اگر گھڑی 12:23 بجے ہوں تو آئینہ میں کیا وقت دکھائی دے گا؟

A.12:33
A.12:33
A.12:33

B.11:37
B.11:37
B.11:37

C.12:37
C.12:37
C.12:37

D.1:23
D.1:23
D.1:23

Answer: B.11:37
B.11:37
B.11:37

152 प्रश्न चिन्हाच्या (?) जागी योग्य ठरणारी आकृती अंकांनी दर्शविलेल्या चार आकृतींमधून शोधून काढा.

Choose an appropriate figure from the four numbered figures for the place of the questions mark (?).

چارشکلوں میں سے، مناسب شکل کا انتخاب کرے اسے سوالی نشان کی جگہ رکھنے کے لئے

प्रश्न आकृत्या

Question Figures

سوالی شکل

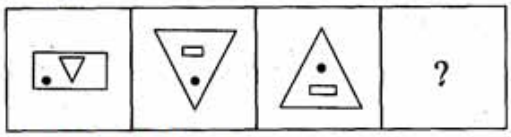

उत्तरासाठी पर्यायी आकृत्या

Answer Figures

جوابی شکل

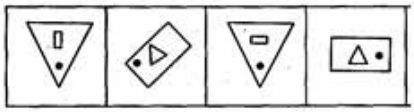

A. (A)

B. (B)

C. (C)

D. (D)

Answer: D. (D)

153 ‘ महोत्सव ’ या शब्दाची संधी सोडवा.

A.महा + उत्सव

B.महान + उत्सव

C.महो + त्सव

D.महत् + उत्सव

Answer: A.महा + उत्सव

154 तारुण्याची सुरुवात हे याचे उदाहरण आहे

Onset of puberty is an example of

بلوغیت کے آغاز کی ایک مثال ہے

A.मानकी वय श्रेणीबद्ध प्रभाव
A.normative age graded influences
A.عام عمر اثرات کو بڑھاتا ہے

B.मानकी इतिहास श्रेणीबद्ध प्रभाव
B.normative history graded influence
B.عام تاریخ اثرات کو بڑھاتا ہے

C.बिगर-मानकी आयुष्य घटना
C.non normative life event
C.زندگی کا غیرعام واقعہ

D.बिगर-मानकी सामाजिक भावनिक घटना
D.non normative socio emotional event
D.غیرمعمولی سمجی جذباتی واقعہ

Answer: A.मानकी वय श्रेणीबद्ध प्रभाव
A.normative age graded influences
A.عام عمر اثرات کو بڑھاتا ہے

155 एका बिंदूपासून सुरुवात करुन A पूर्वेला 4 किमी चालत जातो, मग डावीकडे वळून 3 किमी जातो. मग तो पुन्हा डावीकडे वळतो आणि 4 किमी जातो. तर A त्याच्या सुरुवातीच्या ठिकाणापासून कुठल्या दिशेला आहे?

After starting from a point, A walks 4 km towards East, then turning to left moves 3 km. Then again he turns to left and moves 4 km. In which direction is A from his starting point?

کچھ دیر کے بعد، وہ اپنی دائیں طرف مڑتا ہے۔ اور کچھ دیر بعد وہ اپنے دائیں طرف مڑتا ہے۔ پھر، ایک (d)رام شمال کی طرف چلتا ہے کلومیٹر کا فاصلہ طے کرنے کے بعد، وہ دوبارہ اپنے بائیں طرف مڑتا ہے۔ اب وہ کس سمت میں چل رہا ہے؟

A.पूर्व
A.East
A.شمال

B.दक्षिण
B.South
B.جنوب

C.उत्तर
C.North
C.مشرق

D.पश्चिम
D.West
D.مغرب

Answer: C.उत्तर
C.North
C.مشرق

156	पहिल्या 3 मूळ संख्यांची सरासरी काढा. Find the average of the first 3 prime numbers. پہلے تین مفرد (پرائم نمبرس) کی اوسط ہوگا
	A.10/3 A.10/3 A.10/3
	B.4/7 B.4/7 B.4/7
	C.4 C.4 C.4
	D.8 D.8 D.8
Answer:	A.10/3 A.10/3 A.10/3
157	$(2137)^{754}$ च्या विस्तारामधील एकक स्थानचा अंक? The unit's digit in the expansion of $(2137)^{754}$ is? $(2137)^{754}$ کے پھیلانے میں یونٹ ہندسہ کیا ہے؟
	A.1 A.1 A.1
	B.3 B.3 B.3
	C.7 C.7 C.7

D.9
D.9
D.9

Answer:

D.9
D.9
D.9

158

सूचनाः दिलेल्या पर्यायांमधून ऍनालॉगस शब्द निवडा.

मेंदूचे मनुष्यासोबत नाते आहे जसे .....काँप्युटरसोबत आहे.

DIRECTIONS: Choose the analogous word from the given alternatives.

Brain is to human as _____ is to computer.

ہدایات: دیے گئے متبادل سے مطابق لفظ کا انتخاب کریں

. دماغ اگر انسان کے لئے ہے تو -------- کمپیوٹر کے لئے ہے

A.RAM
A.RAM
A. ریم

B.सेंट्रल प्रोसेसिंग युनिट
B.Central Processing Unit
B. سینٹرل پراسیسنگ یونٹ

C.कीबोर्ड
C.Keyboard
C. کی بورڈ

D.हार्डडिस्क
D.Hard Disk
D.ہارڈ ڈسک

Answer:

B.सेंट्रल प्रोसेसिंग युनिट
B.Central Processing Unit
B. سینٹرل پراسیسنگ یونٹ

159 एमपीआइ मध्ये किती वस्तू आहेत?

How many items are there in MPI?

ایم پی آئی میں کتنے سامان موجود ہیں؟

A.48
A.48
A.48

B.58
B.58
B.58

C.28
C.28
C.28

D.38
D.38
D.38

Answer: A.48
A.48
A.48

160 एकाच फाशाच्या चार अवस्थांवरून 4 ठिपके असणाऱ्या बाजूच्या विरुद्ध बाजूवर किती ठिपके असतील ते शोधून काढा.

From the given four positions of a single dice, find the number of dots at the face opposite to the face having 4 dots.

ہدایات: ایک پاسہ کی دی گئی چار حالتوں میں سے، ایک پاسہ کے منہ پر نقطوں کی گنتی کو دریافت کیجیئے، جس کے سامنے والے پاسہ کے منہ پر 5 نقطہ ہے؟

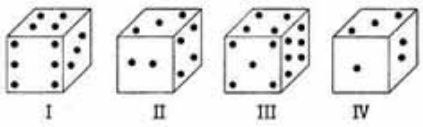

A. 2

B. 4

C. 5

D. 1

Answer: D. 1

161 $y^2+3y+2=0$ या वर्गसमीकरणाची मुळे आहेत:

The roots of the quadratic equation $y^2+3y+2=0$ are:

$y^2+3y+2=0$ مربع مساوات کے روٹ ہیں:

A.2,1
A.2,1
A.2,1

B.-2,-1
B.-2,-1
B.-2,-1

C.4, 1
C.4, 1
C.4, 1

D.-4, 1
D.-4, 1
D.-4, 1

Answer: B.-2,-1
B.-2,-1
B.-2,-1

162 यापैकी कोणती आकृती हॉकी, फूटबॉल आणि क्रिकेट यांच्या दरम्यानचे सर्वोत्तम नाते दर्शवते?

Which of the following diagrams indicates the best relation between Hockey, Football and Cricket?

مندرجہ ذیل ڈایاگرام میں سے کون سی ہاکی، فٹ بال اور کرکٹ کے درمیان بہترین تعلق ہے؟

(A) 

(B) 

(C) 

(D) 

Answer: (B) 

163

सरळ रूप द्या:
102462 + 43212 + 6824362 = ?

Simplify:
102462 + 43212 + 6824362 = ?

آسان بنائیں:
102462 + 43212+ 6824362= ?

A.6970036
A.6970036
A.6970036

B.6970076
B.6970076
B.6970076

C.6970066
C.6970066
C.6970066

D.6970056
D.6970056
D.6970056

Answer:

A.6970036
A.6970036
A.6970036

164

निर्देश: पुढील प्रश्नांपैकी प्रत्येक प्रश्नात एक संख्या गहाळ आहे. मालिकेचा नमुना समजून घ्या आणि योग्य संख्या निवडा.
8, 4, 12, 6, 18, ... , 27

DIRECTION: In each of the following questions, one number is missing in the series. You have to understand the pattern of the series and insert the number.

8, 4, 12, 6, 18, ... , 27

ہدایت جیل کے ہر سوال میں سرج کا ایک نمبر گمشدہ ہے . آپکو اس سرج کو سمجھنا ہے. اور گمشدہ نمبر کو یہا کھوجنا ہے

8, 4, 12, 6, 18, ... , 27

A.10
A.10
A.10

B.12
B.12
B.12

C.18
C.18
C.18

D.यापैकी एकही नाही
D.None of these
D.ان میں سے کوئی نہیں

Answer: D.यापैकी एकही नाही
D.None of these
D.ان میں سے کوئی نہیں

165 सूचना: माहितीचा काळजीपूर्वक अभ्यास करा आणि दिलेल्या प्रश्नाचे उत्तर द्या.
A, B, C, D, E, F, G आणि H हे आठ लोक एका गोलाकार टेबलाभोवती बसलेले असून मध्यभागी बघत आहेत व एकमेकांपासून समान अंतरावर आहेत परंतु त्याच क्रमाने असतील असे नाही. A, Cच्या डावीकडून तिसरा बसलेला आहे. केवळ एक व्यक्ती A आणि G च्या मध्ये बसते, E हा F च्या उजवी कडून दुसऱ्या जागेवर बसतो. F हा A किंवा G चा तत्काळ शेजारी नाही. केवळ एक व्यक्ती B आणि E च्या मध्ये बसतो. E हा D चा तत्काळ शेजारी नाही.
D पासून सुरू होत घड्याळाच्या दिशेने सुरुवात केल्यास किती लोक B व D च्या दरम्यान बसतात?

DIRECTIONS: Study the information carefully and answer the question given.
Eight people A, B, C, D, E, F, G and H are sitting around a circular table facing the centre, with equal distance between each other but not necessarily in the same order. A sits third to the left of C.
Only one person sits between A and G. E sits second to the right of F. F is neither an immediate neighbour of A nor G. Only one person sits between B and E. E is not an immediate neighbour of D.
How many people are sitting between B and D when counted in the clockwise direction starting from D?

ہدایات: معلومات کو دھیان سے پڑھیں اور دیے گئے سوالوں کے جواب دیں۔
ایک گول میز کے چاروں طرف مرکز کا سامنا کیے ہوئے بیٹھے ہیں، جہاں ہر ایک درمیان H اور A، B، C، D، E، F، G آٹھ لوگ کے بائیں طرف سے تیسرے پر بیٹھا ہے۔ A، C مساوی فاصلہ ہے لیکن وہ لازمی طور پر ایک ہی ترتیب میں نہیں ہیں۔
A اور G کا فوری G کا اور نہ ہی A نہ تو F کے دائیں سے دوسری جگہ پر بیٹھا ہے۔ E، F کے درمیان صرف ایک شخص بیٹھا ہے۔ G اور کا فوری پڑوسی نہیں ہے۔ E، D کے درمیان صرف ایک شخص بیٹھا ہے۔ E اور B پڑوسی ہے۔
D کے درمیان کتنے لوگ بیٹھے ہیں؟ D اور B سے شروع کرتے ہوئے گھڑی وار سمت میں شمار کرتے وقت

A.कोणतेही नाही
A.None
A.کوئی نہیں

B.एक
B.One
B.ایک

C.दोन
C.Two
C.دو

D.तीनपेक्षा जास्त
D.More than three
D.تین سے زیادہ

Answer: C.दोन
C.Two
C.دو

166 मोनू आणि सोनू यांच्यामध्ये रू. 100 हे 2:3 प्रमाणात विभागा

Divide Rs. 100 in the ratio of 2:3 between Monu and Sonu?

روپیہ 100 کو 2:3 کے تناسب میں مونو اور سونو کے درمیان تقسیم کریں؟

A.20, 30
A.20, 30
A.20, 30

B.40, 20
B.40, 20
B.40, 20

C.60, 30
C.60, 30
C.60, 30

D.40, 60
D.40, 60
D.40, 60

Answer: D.40, 60
D.40, 60
D.40, 60

167 सूचना: खालील प्रश्नांमध्ये दिलेल्या पर्यायांमधून संबंधित अक्षर/शब्द/संख्या निवडा.

चांगले: वाईट :: सद्गुण : ?

DIRECTIONS: In the following question, select the related letter/word/number from the given alternatives.

Good : Bad :: Virtue : ?

سمت: مندرجہ ذیل سوال میں، دیے گئے متبادل سے متعلقہ حرف/لفظ/نمبر منتخب کریں۔

اچھا : خراب :: خوبی : ؟

A.दोष देणे
A.Blame
A.الزام لگانا

B.पाप
B.Sin
B.گناہ

C.निराश होणे
C.Despair
C.مایوس ہونا

D.दुर्गुण
D.Vice
D.عیب

Answer: D.दुर्गुण
D.Vice
D.عیب

168 $2^x \times 8^2 = 2^9$ असल्यास, x = ?

If $2^x \times 8^2 = 2^9$, then x =?

اگر $2^x \times 8^2 = 2^9$ ؛ تو X کا مان ہوگا

A.6
A.6
A.6

B.5
B.5
B.5

C.4
C.4
C.4

D.3
D.3
D.3

Answer: D.3
D.3
D.3

169 सुपरसॉनिक हवा विमान एक आघात तरंग तयार करते –

Supersonic air plane creates a shock wave called —

سوپرسونک ہوائی جہاز کے ذریعہ پیدا کی جانے والی شاک ترنگ کو کہا جاتا ہے—

A.संक्रमणची तरंग
A.Transition wave
A.تبدیلی ترنگ

B.अल्ट्रासाऊंडची तरंग
B.Ultrasound wave
B.الٹراساونڈ ترنگ

C.ध्वनिची गर्जना
C.Sonic Boom
C.سونک بوم

D.अनुप्रस्थ
D.Transverse
D.مستعرض

Answer: C.ध्वनिची गर्जना
C.Sonic Boom
C.سونک بوم

170 भारतातील कोणत्या राज्यामध्ये जंगल सर्वात जास्त टक्के आहे?

Which state has the highest percentage of forest in India?

بھارت کی کونسی ریاست جنگل کے سب سے زیادہ تناسب کی حامل ہے؟

A.उत्तर प्रदेश
A.Uttar Pradesh
A. اتر پردیش

B.मिझोराम
B.Mizoram
B. میزورم

C.अरुणाचल प्रदेश
C.Arunachal Pradesh
C. اروناچل پردیش

D.आसाम
D.Assam
D. آسام

Answer: B.मिझोराम
B.Mizoram
B. میزورم

171 जर महिन्याचा 6वा दिवस हा शनिवारपेक्षा तीन दिवस आधी असेल, तर त्या महिन्याच्या 21व्या दिवशी कोणता वार असेल

If the 6th day of Month is three days earlier than Saturday, then what day will it be on 21st day of that month

اگر مہینہ کا چھٹاا دن سنیچر سے 3 دن پہلے ہے، تو مہینہ کا 21 واں دن کونسا ہوگا؟

A.मंगळवार
A.Tuesday
A.منگل

B.बुधवार
B.Wednesday
B.بدھ

C.सोमवार
C.Monday
C.پیر

D.गुरूवार
D.Thursday
D.جمعرات

Answer: D.गुरूवार
D.Thursday
D.جمعرات

172 जेव्हा दुधाला जोरात घुसळले जाते तेव्हा त्यातील साय यामुळे वेगळी होते

When the milk is churned vigorously the cream from it is separated out due to—

جب دودھ سے مکھن نکالا گیا تو کریم اس سے علاحدہ ہوگیا کیونکہ--

A.घर्षणबळ
A.Frictional force
A.رگڑن کی طاقت

B.अपकेंद्री बळ
B.Centrifugal force
B.رکز گریز قُوت

C.अभिकेंद्रि बळ
C.Centripetal force
C.مرکز جو قُوت

D.गुरुत्वाकर्षण बळ
D.Gravitational force
D.قوت تثاقل

Answer: B.अपकेंद्री बळ
B.Centrifugal force
B.رکز گریز قُوت

173 निर्देश: खालील प्रश्न दिलेल्या शब्दांवर आधारित आहेत.

FEST/ LACK/ WORK/ RUSH/ FILM

इंग्रजी वर्णमालेच्या दुसर्या शब्दाच्या डाविकडून तिसरया अक्षरात आणि दुसर्या शब्दाच्या उजवीकडील पहिल्या अक्षरात किती वर्णआहेत.

DIRECTIONS: Following question is based on the given words.

FEST/ LACK/ WORK/ RUSH/ FILM

How many letters are there in the English alphabetical series in between the third letter of the second word from the left end and the first letter of the second word from the right end?

ہدایت جیل کے سوال دے ہے لفجونپر مشتمل ہیں

FEST/ LACK/ WORK/ RUSH/ FILM

الٹے ہاتھ کے باجو سے دوسرے لفج کا تیسرا حرف اور سیدھے باجو کے دوسرے لفج کا پہلا حرف ان میں انگریجی حرف تہجیبی کے کتنے حرف اتے ہیں؟

A.15
A.15
A.15

B.14
B.14
B.14

C.16
C.16
C.16

D.18
D.18
D.18

Answer: B.14
B.14
B.14

174 असफलतांवर निराशा किंवा त्याला म्हणतात

Frustration over failures or can be termed as

ناکامی پر مایوسی کو کہا جا سکتا ہے:

A.भावनात्मक ताण
A.Emotional stress
A. جذباتی دباؤ

B.शारीरिक ताण
B.Physiological stress
B.فزیو لوجیکل دباؤ

C.माणसिक ताण
C.Psychological stress
C.نفسیاتی دباؤ

D.सामाजिक ताण
D.Social stress
D. سماجی دباؤ

Answer: C.माणसिक ताण
C.Psychological stress
C.نفسیاتی دباؤ

175

सूचना: दिलेल्या पर्यायांमधून श्रेणी पूर्ण करणारी योग्य आकृती निवडा.

DIRECTIONS: Complete the series by choosing right figure from the given choices.

ہدایات: دیئے گئے اختیارات میں صحیح شکل کا انتخاب کر کے سیریز کو مکمل کیجیئے۔

Problem Figures

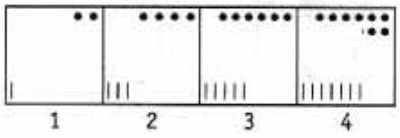

Answer Figures

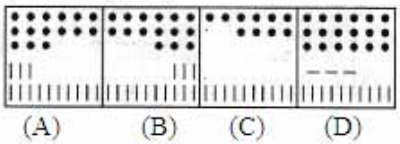

A. (A)

B. (B)

C. (C)

D. (D)

Answer: C. (C)

176 सूचना : खालील दिलेल्या प्रश्नामध्ये काही विधाने आणि काही निष्कर्ष आहेत. सामन्यात: ज्ञात तथ्यांपेक्षा ते वेगळे असतील तर दिलेली विधाने तुम्हाला सत्य मानवी लागतील आणि त्यानंतर दिलेल्या विधानाचे अनुकरण दिलेल्यापैकी कोणता निष्कर्ष तार्किकदृष्ट्या करतो ते ठरवा.
विधाने :
G>R≥E=A≤T≤S

निष्कर्ष :
I. G≥E
II. R≥ A

DIRECTIONS: In the question given below, there are few statements followed by few conclusions. You have to take the given statements to be true even if they seem to be at variance with commonly known facts and then decide which of the given conclusion logically follow(s) from the given statements.

Statements:
G > R ≥ E = A ≤ T ≤ S
Conclusions:
I. G ≥ E
II. R ≥ A

ہدایات: مندرجہ ذیل سوال میں، کچھ بیانات کے بعد کچھ نتائج موجود ہیں. اگر آپ کو عام طور پر جانے جاتے حقائق کے ساتھ بھی متغیر ہونے لگے تو بھی آپ دئے گئے بیانات دماغ میں رکھیں اور پھر اس بات کا فیصلہ کریں کہ ذیل میں دیا گیا کونسا نتیجہ منطقانہ طور پر دیے گئے بیانات کی پیروی کرتا ہے.

بیانات:
G>R≥E=A≤T≤S

نتائج:
G≥E .I
R≥ A .II

A.फक्त II निष्कर्ष खरा आहे
A.Only conclusion II is true
A.صرف نتیجہ II درست ہے

B.फक्त I निष्कर्ष खरा आहे
B.Only conclusion I is true
B.صرف نتیجہ I درست ہے

C.I किंवा II यापैकी एक निष्कर्ष खरा आहे
C.Either conclusion I or II is true
C.یا I یا II نتیجہ درست ہے

D.I व II हे दोन्हीही निष्कर्ष खरे नाहीत
D.Neither conclusion I nor II is true
D.نہ ہی I نہ ہی II نتیجہ درست ہے

Answer: A.फक्त II निष्कर्ष खरा आहे
A.Only conclusion II is true
A.صرف نتیجہ II درست ہے

177 सूचना: खाली दिलेल्या प्रश्नात एक विधान आहे ज्याचे I आणि II असे दोन निष्कर्ष त्याखाली अंकित केलेले आहेत. या आधारे सर्वात योग्य पर्याय निवडा.

विधान:
सरकारच्या धोरणांविरुद्ध देशभरातील विद्यार्थी निषेध करत आहेत.

निष्कर्ष:
I. परकीय शक्तींमुळे अशांतता पसरत आहे.
II. सरकारच्या धोरणांबद्दल विद्यार्थी संतुष्ट नाही आहेत.

DIRECTIONS: The question below has a statement followed by two conclusions numbered I and II. Based on this choose the option that is most suitable.

Statement:
The students across the country are protesting against the policies of the government.

Conclusions:
I. Unrest is being spread by foreign powers.
II. Students are not happy with government policies.

ہدایات: نیچے دیے گئے سوال میں ایک بیان کے بعد دو نتائج I اور II دیے گئے ہیں۔ اس کی بنیاد پر انتہائی موزوں آپشن کا انتخاب کیجیے۔

بیان:
ملک بھر میں طلباء حکومت کی پالیسیوں کے خلاف احتجاج کر رہے ہیں.

نتیجے:
I. غیر ملکی طاقتیں بدامنی پھیلا رہی ہیں.
II. طلباء سرکاری پالیسیوں سے خوش نہیں ہیں.

A.केवळ निष्कर्ष क्रमांक I विधानास अनुसरून आहे
A.Only Conclusion I follows
A. صرف نتیجہ I لاگو ہو گا۔

B.केवळ निष्कर्ष क्रमांक II विधानास अनुसरून आहे
B.Only Conclusions II follows
B. صرف نتیجہ II لاگو ہو گا۔

C.निष्कर्ष क्रमांक I किंवा II अनुसरून आहे
C.Either I or II follows
C. I یا II میں سے ایک لاگو ہو گا۔

D.कोणताही निष्कर्ष अनुसरून नाही
D.Neither I nor II follow
D. I اور II میں سے کوئی بھی لاگو نہیں ہو گا۔

Answer: B.केवळ निष्कर्ष क्रमांक II विधानास अनुसरून आहे
B.Only Conclusions II follows
B. صرف نتیجہ II لاگو ہو گا۔

178 डेसिबल एककचा उपयोग आहे…….. .

The use of Decibel unit is …….. .

ڈیسیبل اکائی کا استعمال ہوتا ہے-----

A.प्रकाशाची गती
A.Speed of Light
A.روشنی کی رفتار

B.उष्णतेची तीव्रता
B.Intensity of heat
B.تپش کی شدت

C.ध्वनीची तीव्रता
C.Intensity of sound
C.آواز کی شدت

D.रेडिओ तरंगाची आवर्तता
D.Frequency of radio wave
D.ریڈیو ترنگ کا تعدد

Answer: C.ध्वनीची तीव्रता
C.Intensity of sound
C.آواز کی شدت

179 कोन हा त्याच्या परिपूरक कोनाच्या एक तृतीअंश आणि त्याच्या पूरक कोनाच्या एक-सप्तांश आहे, तर कोन शोधा.

An angle is one third of its complement and one-seventh of its supplement, then find the angle.

ایک زاویہ اپنے کمپلیمنٹ کا ایک تہائی ہے اور اپنے سپلیمنٹ کا ساتویں حصہ ہے، پھر زاویہ تلاش کریں۔

A.20.5°
A.20.5°
A.20.5°

	B.21.5° B.21.5° B.21.5°	
	C.22.5 C.22.5 C.22.5	
	D.23.5° D.23.5° D.23.5°	
Answer:	C.22.5 C.22.5 C.22.5	
180	12 ही संख्या 86 च्या किती टक्के आहे How many percent of 86 is 12? 86؟ ہے 12 کا کتنا فیصد	
	A.18% A.18% A.18%	
	B.13.95% B.13.95% B.13.95%	
	C.16.50% C.16.50% C.16.50%	
	D.12.45% D.12.45% D.12.45%	

Answer: B.13.95%

B.13.95%

B.13.95%

181 _____ मध्ये लघु मोजपट्या आणि मोठ्या मोजपट्या आढळतात.

Short scales and long scales are found in _____

شارٹ (مختصر) اسکیل اور طویل اسکیل پائے جاتے ہیں:

A.डब्ल्यूएआइएस
A.WAIS
A.ویس (ڈبلیو اے آئی ایس)

B.एमपीआइ
B.MPI
B.ایم پی آئی

C.आरएसपीएम
C.RSPM
C.آر ایس پی ایم

D.जीएमएटी
D.GMAT
D.جی میٹ

Answer: B.एमपीआइ
B.MPI
B.ایم پی آئی

182 सूचना : खालील प्रत्येक प्रश्नात दोन विधाने I आणि II दिलेले आहेत. हे विधान एकतर स्वतंत्र कारण असू शकतात किंवा स्वतंत्र कारणांचे परिणाम असू शकतात. यांपैकी एक विधान इतर विधानाचा परिणाम असू शकतो. दोन्ही विधाने वाचा आणि खालीलपैकी कोणत्या उत्तराचा पर्याय या दोन्ही विधानांमधील संबंधांचे वर्णन करतो ते ठरवा.

विधान :
I. इंटरव्हूय पॅनलने तीन रिक्त जागांसाठी पाच उमेदवारांची शिफारस केली आहे जी कंपनी Z मध्ये ताबडतोब भरायची आहे.
II. पाच उमेदवारांना त्यांचे निकाल जाणून घेण्यासाठी आणि त्यानुसार नियुक्तीपत्रे जमा करण्यासाठी पुढील आठवड्यात कंपनी Z शी संपर्क करण्यास सांगण्यात आले आहे.

DIRECTIONS: Below in each question are given two statements I and II. These statements may be either independent causes or may be effects of independent causes. One of these statements may be the effect of the other statement. Read both the statements and decide which of the following answer choice correctly depicts the relationship between these two statements.

Statements:
I.The interview panel has recommended fivecandidates for three vacancies which are to be filledin immediately in Company Z.
II. The five candidates have been asked to contact Company Z next week to know their result and accordingly to collect appointment letters.

ہدایات: نیچے ہر سوال میں دو بیانات I اور II آ زاد وجوہات یا پھر آزاد وجوہات کے اثرات ہو سکتے ہیں۔ انہیں گئے ہیں۔ یہ بیانات یا تو بیانات میں سے ایک بیان دوسرے کا اثر ہو سکتا ہےدونوں بیانات پڑھیں اور فیصلہ کریں کہ نیچے دیے گئے کس جواب کا انتخاب ان دونوں بیانات کے در میان تعلق کو ٹھیک سے ظاہر کرتا ہے۔

بیانات:
I – کمپنی کی تین آسامیوں کے لیے جن پر فوری تقرری کی جائے گی، پانچ امیدواروں کی سفارش کی ہے۔ Z انٹرویو پینل نے
II کمپنی سے رابطہ کرنے کے Z ۔ پانچ امیدواروں کو اپنا نتیجہ جاننے اور اس کے مطابق اپوائنمنٹ لیٹر وصول کرنے کے لیے اگلے ہفتے لیے کہاگیا ہے۔

A.I हा परिणाम आहे आणि II हे त्याचे तात्काळ आणि प्रमुख कारण आहे;
A.I is effect and II is its immediate and principal cause;
A.بیان نمبر I اس کی فوری اور بنیادی وجہ ہے۔ II اثر ہے اور بیان نمبر

B.I हे तात्काळ आणि प्रमुख कारण आहे आणि II हा त्याचा परिणाम आहे;
B.I is the immediate and principal cause and II its effect;
B.بیان نمبر I اس کا اثر ہے۔ II فوری اور بنیادی وجہ ہے اور بیان نمبر

C.I हा परिणाम आहे परंतु II हे त्याचे तात्काळ आणि प्रमुख कारण नाही;
C.I is an effect but II is not its immediate and principal cause;
C.بیان نمبر I اس کی فوری اور بنیادی وجہ نہیں ہے۔ II اثر ہے لیکن بیان نمبر

D.II हा परिणाम आहे परंतु I हे त्याचे तात्काळ आणि प्रमुख कारण नाही;
D.II is an effect but I is not its immediate and principal cause;
D.بیان نمبر II اس کی فوری اور بنیادی وجہ نہیں ہے۔ I اثر ہے لیکن بیان نمبر

Answer: B.I हे तात्काळ आणि प्रमुख कारण आहे आणि II हा त्याचा परिणाम आहे;
B.I is the immediate and principal cause and II its effect;
B.بیان نمبر I فوری اور بنیادی وجہ ہے اور بیان نمبر II اس کا اثر ہے۔

183 खालीलपैकी कोणते उद्दिष्ट मार्गदर्शनांसह जोडलेले आहे?

Which of the following objective is associated with instruction?

مندرجہ ذیل مقصد میں سے کون سا ہدایت کے ساتھ متعلق ہے؟

A.मुलामध्ये वर्तणुकविषयक बदल आणि सवयी वर्धित करण्यासाठी
A.To enhance behavioural changes and habits in a child
A.بچے میں رویے کی تبدیلیوں اور عادات کو بڑھانے کے لئے

B.मुलामध्ये वर्तणुकविषयक आणि कुशलता वर्धित करणे
B.To enhance behavioural changes and skills in a child
B.بچے میں رویے کی تبدیلی اور مہارت کو بڑھانے کے لئے

C.ज्ञानाचे प्रसारण करण्यासाठी
C.To transmit the knowledge
C.علم کو منتقل کرنے کے لئے

D.विश्वास आणि विकासाची मूल्ये बदलण्यासाठी
D.To change the beliefs and develop values
D.عقائد کو تبدیل کرنا اور اقدار کو فروغ دینا

Answer: C.ज्ञानाचे प्रसारण करण्यासाठी
C.To transmit the knowledge
C.علم کو منتقل کرنے کے لئے

184 नाणे 10 वेळा फेकल. किमान एकदा छापा मिळण्याची संभाव्यता काढा

A coin is tossed 10 times. Find the probability of obtaining head at least once.

ایک سکے کو دس بار اچھالا جائے۔ کم سے کم ایک بار ہیڈ حاصل کرنے کی امکانات تلاش کریں۔ .

A.$1/2^{10}$
A.$1/2^{10}$
A.$1/2^{10}$

B.$10/2^{10}$
B.$10/2^{10}$
B.$10/2^{10}$

C.$9/2^{10}$
C.$9/2^{10}$
C.$9/2^{10}$

D.$(2^{10}-1)/2^{10}$
D.$(2^{10}-1)/2^{10}$
D.$(2^{10}-1)/2^{10}$

Answer: D.$(2^{10}-1)/2^{10}$
D.$(2^{10}-1)/2^{10}$
D.$(2^{10}-1)/2^{10}$

185 5407 – 3114 + 3244 – 4729 + 7777 =?

5407 – 3114 + 3244 – 4729 + 7777 =?

5407 – 3114 + 3244 – 4729 + 7777 =?

A.6548
A.6548
A.6548

B.8585
B.8585
B.8585

C.9658
C.9658
C.9658

D.9632
D.9632
D.9632

Answer: B.8585
B.8585
B.8585

186 संतुलनाची संकल्पना या स्वरूपात स्पष्ट केली जाते

The concept of balance is described in the form of

توازن کا تصور درج ذیل شکل میں بیان کیا جاتا ہے:

A.A – B – C त्रिकोण
A.A – B – C triangle
A.A – B – C مثلث

B.X – O – A त्रिकोण
B.X – O – A triangle
B.X – O – A مثلث

C.C – A – B त्रिकोण
C.C – A – B triangle
C.C – A – B مثلث

D.P – O – X त्रिकोण
D.P – O – X triangle
D.P – O – X مثلث

Answer: D.P – O – X त्रिकोण
D.P – O – X triangle
D.P – O – X مثلث

187 **सूचना**: दिलेल्या पर्यायांमधून श्रेणी पूर्ण करणारी योग्य आकृती निवडा.

DIRECTIONS: Complete the series by choosing right figure from the given choices.

ہدایات: دیئے گئے اختیارات میں صحیح شکل کا انتخاب کر کے سیریز کو مکمل کیجیئے۔

प्रश्न आकृत्या
Question Figure
سوالی شکل

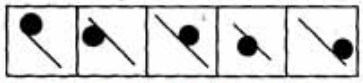

उत्तरासाठी पर्यायी आकृत्या
Answer Figures
جوابی شکل

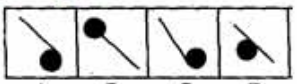

A. (A)

B. (B)

C. (C)

D. (D)

Answer: A. (A)

188 खालीलपैकी कोणते आनुवंशिक रोग आहे?

Which one of the following is a hereditary disease?

مندرجہ ذیل میں سے کون ایک خاندانی بیماری ہے؟

A.बहुरक्तस्त्राव
A.Haemophilia
A.ہیموفیلیا

B.लघुदृष्टिदोष
B.Myopia
B.نزدیک نظری

C.रक्तक्षय
C.Anaemia
C.انیمیا (خون کی کمی)

D.श्वेतपेशी कर्करोग
D.Leukemia
D.سرطان خون

Answer: A.बहुरक्तस्त्राव
A.Haemophilia
A.ہیموفیلیا

189 सूचना: दिलेल्या पर्यायांमधून वेगळे ते बाहेर काढा.

DIRECTIONS: Find the odd one out from the given alternatives.

سمت: دیے گئے متبادل میں سے بے جوڑ کو تلاش کرو۔

A.त्वचा
A.Skin
A.جلد

B.डोळा
B.Eye
B.آنکھ

C.पाय
C.Leg
C.ٹانگ

D.नाक
D.Nose
D.ناک

Answer:	C.पाय C.Leg C.ٹانگ

190	भ्रम म्हणजे Delusion can be said as نظروں کے دھوکہ کو بیان کیا جاسکتا ہے بطور
	A.एकटेपणाची भावना A.Feeling of loneliness A.اکیلے پن کا احساس
	B.समाजाबद्दल रागाची भावना B.Feeling of anger towards society B.سماج کے تعلق سے غصہ
	C.खोटे विश्वास C.False belief C.غلط سوچ
	D.वरीलपैकी कोणतेही नाही D.none of the above D.درج بالا میں سے کوئی نہیں

Answer:	C.खोटे विश्वास C.False belief C.غلط سوچ

191 सूचना: माहितीचा काळजीपूर्वक अभ्यास करा आणि दिलेल्या प्रश्नाचे उत्तर द्या.
A, B, C, D, E, F, G आणि H हे आठ लोक एका गोलाकार टेबलाभोवती बसलेले असून मध्यभागी बघत आहेत व एकमेकांपासून समान अंतरावर आहेत परंतु त्याच क्रमाने असतील असे नाही. A, Cच्या डावीकडून तिसरा बसलेला आहे. केवळ एक व्यक्ती A आणि G च्या मध्ये बसते, E हा F च्या उजवी कडून दुसऱ्या जागेवर बसतो. F हा A किंवा G चा तत्काळ शेजारी नाही. केवळ एक व्यक्ती B आणि E च्या मध्ये बसतो. E हा D चा तत्काळ शेजारी नाही.
D च्या तत्काळ उजवीकडे असलेल्याच्या व्यक्तीच्या संदर्भात E चे स्थान काय आहे?

DIRECTIONS: Study the information carefully and answer the question given.
Eight people A, B, C, D, E, F, G and H are sitting around a circular table facing the centre, with equal distance between each other but not necessarily in the same order. A sits third to the left of C.
Only one person sits between A and G. E sits second to the right of F. F is neither an immediate neighbour of A nor G. Only one person sits between B and E. E is not an immediate neighbour of D.
What is E's position with respect to the one who is to the immediate right of D?

ہدایات: معلومات کو دھیان سے پڑھیں اور دیے گئے سوالوں کے جواب دیں۔
ایک گول میز کے چاروں طرف مرکز کا سامنا کیے ہوئے بیٹھے ہیں، جہاں ہر ایک درمیان H اور A، B، C، D، E، F، G آٹھ لوگ
کے بائیں طرف سے تیسرے پر بیٹھا ہے۔ A، C مساوی فاصلہ ہے لیکن وہ لازمی طور پر ایک ہی ترتیب میں نہیں ہیں۔
کا فوری G کا اور نہ ہی A نہ تو F کے دائیں سے دوسری جگہ پر بیٹھا ہے۔ E، F کے درمیان صرف ایک شخص بیٹھا ہے۔ G اور A
کا فوری پڑوسی نہیں ہے۔ E، D کے درمیان صرف ایک شخص بیٹھا ہے۔ E اور B پڑوسی ہے۔
D کی پوزیشن کیا ہے؟ E کے فوری دائیں طرف بیٹھے والے شخص کے تعلق سے

A.डावीककडून दुसरा
A.Second to the left
A.بائیں سے دوسری

B.उजवीकडून तिसरा
B.Third to the right
B.دائیں سے تیسری

C.लगेच डावीकडे
C.Immediate left
C.فوری بائیں

D.उजवीकडून दुसरा
D.Second to the right
D.دائیں سے دوسری

Answer: D.उजवीकडून दुसरा
D.Second to the right
D.دائیں سے دوسری

192 भारतामध्ये कोणता दिवस बालदिन म्हणून साजरा केला जातो?

Which day is celebrated as Children's Day in India?

ہندوستان میں کونسا دن یوم اطفال کے طور پر منایا جاتا ہے؟

	A.१३ नोव्हेंबर A.13th November A.13 نومبر
	B.१४ नोव्हेंबर B.14th November B.14 نومبر
	C.१५ नोव्हेंबर C.15th November C.15 نومبر
	D.१६ नोव्हेंबर D.16th November D.16 نومبر
Answer:	B.१४ नोव्हेंबर B.14th November B.14 نومبر

193 सूचना: दोन विधाने आणि त्यानंतर चार निष्कर्ष, I, II, III आणि IV दिले आहेत. ही विधाने सामान्यतः ज्ञात वस्तुस्थितीपेक्षा भिन्न असली तरी सत्य आहेत असे समजा. दिलेल्यापैकी कोणता निष्कर्ष दिलेल्या विधानांवरुन नक्की काढता येऊ शकतो हे तुम्ही ठरवायचे आहे.तुमचे उत्तर सूचित करा.
विधान:
(a) सर्व कुत्री पुस्तकं आहेत.
(b) सर्व पुस्तकं चित्रं आहेत.
निष्कर्ष:
I. सर्व कुत्री चित्रं आहेत.
II. सर्व पुस्तकं कुत्री आहेत.
III. सर्व चित्रं कुत्री आहेत.
IV. काह चित्रं पुस्तकं आहेत.

DIRECTION: Two statements are given following by four conclusions, I, II, III and IV. You have to consider that statements to be true, even if they seem to be at variance from commonly known facts. You are to decide which of the given conclusions can definitely be drawn from the given statements. Indicate your answer.

Statement:
(a) All dogs are books
(b) All books are pictures.

Conclusion:
I. All dogs are pictures.
II. All books are dogs.
III. All pictures are dogs.
IV. Some pictures are books.

ہدایات: دو سٹیٹمنٹ جوکہ چار خلاصوں پر مشتمل ہیں .I،II، III اور IV. اگرچہ دکہنے میں وہ بہت .اپ کو وہ سٹیٹمنٹ درست ماننا ہے، سارے حقاٰق ست مطبقت رکہتی ہو۔ اپ کو دیے گے خلاصوں میں سے یقینی طور پر اسے اختیار کرنا ہے جو سٹیٹمنٹ سے نکلا ہو. اپنا جواب تلاش کرے

اظہار بیان:
تمام کتے کتاب ہیں
تمام کتابیں تصویریں ہیں

نتائج:
I تمام کتے تصویریں ہیں
II تمام کتابیں کتے ہیں
III .تمام تصویریں کتے ہیں
IV کچہ تسویریں کتابیں ہیں

A.केवळ I आणि IV निष्कर्ष निघेल
A.Only I and IV follow
A.صرف I اور IV درست ہے

B.केवळ II आणि III निष्कर्ष निघेल
B.Only II and III follow
B.صرف II اور III درست ہے

C.एकतर II किंवा III निष्कर्ष निघेल
C.Either II or III follows
C.یا II یا III درست ہے

D.एकतर II किंवा IV निष्कर्ष निघेल
D.Either II or IV follows
D.یا II یا IV درست ہے

Answer: A.केवळ I आणि IV निष्कर्ष निघेल
A.Only I and IV follow
A.صرف I اور IV درست ہے

194 गुणाकार करा:
7539 × 48 = ?

Multiply:
7539 × 48 = ?

ضرب دیں:
7539 × 48= ?

A.378862
A.378862
A.378862

B.335562
B.335562
B.335562

C.354622
C.354622
C.354622

D.361872
D.361872
D.361872

Answer: D.361872
D.361872
D.361872

For More Info And Videos About TAIT-Exam Syllabus And Other Exam Visit My Channel
BADSHAHimp SubScribe Like & Share YouTube WWW.YouTube/BADSHAHimp

195 शिक्षक स्वतःच एक दृक-श्राव्य सामग्री (सहायता) म्हणून काम करतो कारण

Teacher himself works as an audio-visual material (aid) because—

ٹیچر خود آڈیو بصری مواد (مدد) کے طور پر کام کرتا ہے کیونکہ -

A.तो/ती स्वतःला वर्गासाठी अधिक सुंदर बनवतो
A.He/she makes himself/herself more beautiful in the class
A.وہ خود کو کلاس میں زیادہ خوبصورت بنا دیتا/ دیتی ہے

B.तो/ती शिकवणे अधिक आकलन योग्य होण्यासाठी शारिरीक स्थिती आणि देहबोलीची मदत घेतो/घेते
B.He/she takes help of postures and body language to make teaching more comprehensible
B.وہ پوچھ گچھ اور جسمانی زبان کی مدد سے تدریس کو زیادہ جامع بناتا/ بناتی ہے

C.तो/ती वर्गामध्ये नाटकीय भूमिका वठवतो
C.He/she makes dramatising roles in the class
C.وہ کلاس میں ڈرامیسٹک کردار ادا کرتا/ کرتی ہے

D.तो/ती टि.व्ही.वरील एक चित्र म्हणून काम करतो/करते
D.He/she works as a picture on T.V. screen
D.وہ ٹی وی اسکرین پر ایک تصویر کے طور پر کام کرتا/ کرتی ہے

Answer: B.तो/ती शिकवणे अधिक आकलन योग्य होण्यासाठी शारिरीक स्थिती आणि देहबोलीची मदत घेतो/घेते
B.He/she takes help of postures and body language to make teaching more comprehensible
B.وہ پوچھ گچھ اور جسمانی زبان کی مدد سے تدریس کو زیادہ جامع بناتا/ بناتی ہے

196 खालीलपैकी कोणती विधाने सत्य आहेत?
(a) एकरेषीय जोडी तयार करणारे कोन पूरक असतात.
(b) जर दोन संलग्न कोन समान असतील, तर प्रत्येक कोनाचे माप 90° असेल.
(c) एकरेषीय जोडी तयार करणारे दोन्ही कोन लघु असू शकतात.
(d) जर एकरेषीय जोडी बनवणारे कोन समान असतील, तर हे प्रत्येक कोन 90° चे असतात.

Which of the following statements are true?
(a) Angles forming a linear pair are supplementary.
(b) If two adjacent angles are equal, then measures of each angle will only be 90°.
(c) Angles forming a linear pair can both be acute angles.
(d) If angles forming a linear pair are equal, then each of these angles is of 90°.

مندرجہ ذیل بیانات میں سے کون سا صحیح ہے؟
(a) لینئر جوڑا بنانے ولے زاویہ سپلیمنٹری ہیں۔
(b) اگر دو قریبی زاویہ برابر ہوں تو ان کی پیمائش 90°ہوگی -
(c) لینئر جوڑا بنانے والے دونوں زاویہ ایکیوٹ ہو سکتے ہیں۔
(d) اگر دو قریبی زاویہ برابر ہوں ہر ایک کی پیمائش 90°ہوگی -

For More Info And Videos About TAIT-Exam Syllabus And Other Exam Visit My Channel
BADSHAHimp SubScribe Like & Share YouTube WWW.YouTube/BADSHAHimp

A.फक्त a
A.Only a
A.صرف a

B.a, b आणि d
B.a, b and d
B. b, a اور d

C.c आणि d
C.c and
C. cاور d

D.a आणि d
D.a and d
D. aاور d

Answer: D.a आणि d
D.a and d
D. aاور d

197 'उपकार' या शब्दाचा विरुद्धार्थी शब्द कोणता ?

A.आकार

B.उपवास

C.अपकार

D.ओंकार

Answer: C.अपकार

198 व्यक्तीच्या विशेषतांचा इच्छित विकास मोठ्या प्रमाणात — शी संबंधित आ

The development of desirable person's characteristics is largely a matter of—

-مطلوبہ شخص کی خصوصیات کی ترقی --- کا ایک اہم معاملہ ہے

A.सामाजिक दबाव
A.Social pressures
A.سماجی دباؤ

B.सवय लागणे
B.Habit-formation
B.عادات کی تشکیل

C.प्रेरणा
C.Motivation
C.ترغیب

D.शिकण्याची संधी
D.Opportunity for learning
D.سیکھنے کے مواقع

Answer: C.प्रेरणा
C.Motivation
C.ترغیب

199 सूचना: अर्थपूर्ण परिच्छेद निर्माण करण्यासाठी, खाली दिलेली (P), (Q) (R), (S) आणि (T) ही पाच वाक्ये योग्य अनुक्रमाने पुनर्रचना करा; त्यांनतर खालील प्रश्नांची उत्तर द्या. P. कृष्णाने त्यांना त्यांचे डोळे बंद करायला सांगून जोपर्यंत सांगत नाही तोपर्यंत उघडू नये म्हणूनही सांगितले.
Q. ते खेळण्यात एवढे गुंग होते कि त्यांच्या सभोवती जंगलाला आग लागलायचे लक्षात आले नाही.
R. सर्वानी डोळे बंद केल्यानंतर कृष्णाने सर्व आग गिळून टाकली आणि सर्व मित्रांना आणि गायींना वाचविले.
S. एकदा कृष्ण आपल्या बालमित्रांसोबत गायी घेऊन घनदाट जंगलात गेला होता.
T. सर्वजण घाबरले आणि त्यांनी मदतीसाठी कृष्णाला विनवणी केली.

पुनर्रचना केल्यानंतर खालीलपैकी कोणते वाक्य पाचवे असेल?

DIRECTION: Rearrange the following five sentences (P), (Q), (R), (S) and (T) in the proper sequence to form a meaningful paragraph; then answer the questions given below them.
P. Krishna asked them all to close their eyes and not to open them until he asked them to do so
Q. They were so busy in their games that they did not realize a fire broke into the forest, all around them.
R. While everybody's eyes were closed Krishna swallowed all the fire and hence protected his friends and cows.
S. Once, Krishna and his friends went deep into the jungle with their cows.
T. Everybody was petrified and pleaded Krishna to help them.

Which of the following should be the FIFTH sentence after rearrangement?

ہدایات: ان پانچ جملوں (P)، (Q)، (R)، (S) اور (T) کو با معنی پیرا بنانے کے لئے دوبارہ ترتیب دیجئے، پھر نیچے دے گئے سوالوں کے جواب دیجئے
P . کرشنا نے انسے کہا کہ وو سب اپنی آنکھیں بند کرے اور تب تک نہ کھولے جب تک وو نہ کہے.
Q. وو اپنے کھیل میں مصروف تھے کہ انکو احساس ہی نہی ہوا کہ انکے ارد گرد چاروں اور جنگل میں آگ لگ گی ہے.
R. جب سب کی آنکھیں بند تھی کرشنا نے ساری آگ نغل لی اور اس طرح اپنے دوستوں اور گائیں بچا لی.
S. ایک بار کرشنا اور اسکے دوست اپنی گائیں کے ساتھ جنگلکے اندھر چلے گے.
T. ہر کوئی ڈرا ہوا تھا اور کرشنا سے مدد کی التجا کر رہے تھے.

دوبارہ ترییب دینے کے بعد کون سا جملہ پانچوہ ہونا چاہیے؟

A.R
A.R
A.R

B.P
B.P
B.P

C.Q
C.Q
C.Q

D.S
D.S
D.S

Answer: A.R
A.R
A.R

200 निर्देश: खालील प्रश्नांमध्ये प्रश्न चिन्हाच्या (?) जागी कोणते अंदाजे मूल्य यायला हवे? (तुम्ही अचूक मूल्य काढण्याचे अपेक्षित नसल्याची नोंद घ्या).
0.72 × 847+341 × 929-33=?

DIRECTIONS: What approximate value should come in place of the question mark (?) in the following questions? (Note you are not expected to calculate the exact values.) .
0.72 × 847+341 × 929-33=?

ہدایات: مندرجہ ذیل سوال میں سوال کا نشان (?) کی جگہ پر کون سا تخمینہ ویلیو آئے گا - (آپ کو صحیح ویلیو نکالنے کی ضرورت نہیں ہے)
0.72 × 847+341 × 929-33=?

A.317300
A.317300
A.317300

B.317225
B.317225
B.317225

C.317480
C.317480
C.317480

D.317370
D.317370
D.317370

Answer: D.317370
D.317370
D.317370

For More Info And Videos About TAIT-Exam Syllabus And Other Exam Visit My Channel
BADSHAHimp SubScribe Like & Share YouTube WWW.YouTube/BADSHAHimp

For More Info And Videos About TAIT-Exam Syllabus And Other Exam Visit My Channel
BADSHAHimp SubScribe Like & Share YouTube WWW.YouTube/BADSHAHimp

Question Paper Title : TAIT_PAPER_23

Date of Exam : 2017-12-21 16:00:00.0

1	पुढील म्हण पूर्ण करा - ‘ खाई त्याला ------- ‘
	A.खावे
	B.खवखवे
	C.खवा
	D.मावा
Answer:	B.खवखवे

2	‘कामचुकार‘ या शब्दाचा समानार्थी शब्द कोणता ?
	A.मेहनती
	B.काम करणारा
	C.अंगचोर
	D.कष्टाळू
Answer:	C.अंगचोर

3	खालीलपैकी शुद्ध शब्द कोणता ?
	A.करदोडा
	B.कडदोडा
	C.करडोरा
	D.कडदोरा
Answer:	D.कडदोरा

For More Info And Videos About TAIT-Exam Syllabus And Other Exam Visit My Channel
TAIT च्या 30 प्रश्नपत्रिका PDF
BADSHAHimp Available Request 9765226781
WWW.YouTube.com/BADSHAHimp
Subscribe My Channel

4	DIRECTIONS: A sentence with an underlined phrasal verb is given below. Out of the four options, choose the one which can be substituted for the given phrasal Verb. I am just looking around for a Pencil.
	A.neglecting
	B.searching
	C.relaxing
	D.avoiding
Answer:	B.searching
5	निर्देश: मालिका पूर्ण करा EAI, GDM, IGQ,? DIRECTION: Complete the series EAI, GDM, IGQ,? ہدایت اس سرج کو مکمّل کرو EAI, GDM, IGQ,?
	A.KJU A.KJU A.KJU
	B.IJU B.IJU B.IJU
	C.MJU C.MJU C.MJU
	D.NJU D.NJU D.NJU
Answer:	A.KJU A.KJU A.KJU

For More Info And Videos About TAIT-Exam Syllabus And Other Exam Visit My Channel
TAIT च्या 30 प्रश्नपत्रिका PDF
BADSHAHimp Available Request 9765226781
WWW.YouTube.com/BADSHAHimp
Subscribe My Channel

6 दूधाची घनता मोजण्यासाठी वापरले जाणारे एक साधन आहे—

An instrument used to measure the density of milk is—

دودھ کی کثافت کی پیمائش کے لئے استعمال ہونے والے انسٹرومینٹ ہے ___

A.ग्लॅक्टोमीटर
A.Glactometer
A.گلیکٹومیٹر

B.लॅक्टोमीटर
B.Lactometer
B.لیکٹومیٹر

C.कॅल्शिओमीटर
C.Calciometer
C.کیلشیومیٹر

D.पोलारीमीटर
D.Polarimeter
D.پولاری میٹر

Answer:
B.लॅक्टोमीटर
B.Lactometer
B.لیکٹومیٹر

7 जे. के. रॉलिंग हे _____ चे लेखक आहेत

J.K. Rowling is the author of –

جے کے راؤلنگ مصنف ہیں۔

A.टॉम सोवयर
A.Tom Sowyer
A.ٹام سوئر کے

B.हॅरी पॉटर
B.Harry Potter
B.ہیری پاٹر کے

C.स्पायडरमॅन
C.Spiderman
C.اسپائیڈر مین

D.यांपैकी कोणतेही नाही
D.None of these
D.ان میں سے کوئی نہیں

For More Info And Videos About TAIT-Exam Syllabus And Other Exam Visit My Channel
TAIT च्या 30 प्रश्नपत्रिका PDF
BADSHAHimp Available Request 9765226781
WWW.YouTube.com/BADSHAHimp
Subscribe My Channel

Answer:	B.हॅरी पॉटर B.Harry Potter B.ہیری پاٹر کے

8	सूचना: दिलेल्या पर्यायांमधून वेगळे ते निवडा. DIRECTIONS: Choose the odd one out from the given alternatives. دیے گئے متبادل میں سے بے جوڑ کو چنیں۔
	A.झोपडी A.Hut A.جھونپڑی
	B.ईमारत B.Building B.عمارت
	C.तंबू C.Tent C.خیمہ
	D.गुहा D.Cave D.غار
Answer:	D.गुहा D.Cave D.غار

9	‘ जखमेवर मीठ चोळणे ‘ या वाक्प्रचाराचा अर्थ काय ?
	A.उणीवेवर प्रहार करणे
	B.ईलाज करणे
	C.खूप त्रास देणे
	D.मालिश करणे
Answer:	A.उणीवेवर प्रहार करणे

For More Info And Videos About TAIT-Exam Syllabus And Other Exam Visit My Channel
TAIT च्या 30 प्रश्नपत्रिका PDF
BADSHAHimp Available Request 9765226781
WWW.YouTube.com/BADSHAHimp
Subscribe My Channel

10	एका आठवड्याला तासांमध्ये रूपांतरीत करा Convert a week into hours: ایک ہفتہ کو گھنٹوں میں بدلیں؟
	A.202 तास A.202 h A.202گھنٹے
	B.168 तास B.168 h B.168گھنٹے
	C.206 तास C.206 h C.206گھنٹے
	D.208 तास D.208 h D.208گھنٹے
Answer:	B.168 तास B.168 h B.168گھنٹے
11	DIRECTIONS: A sentence with an underlined phrasal verb is given below. Out of the four options, choose the one which can be substituted for the given phrasal Verb. You can count on this study material for the preparation of your exam.
	A.discard
	B.throw away
	C.rely on
	D.abandon
Answer:	C.rely on
12	DIRECTIONS: A sentence with an underlined word is given below. Find the Word which is most similar in meaning to the underlined word. Susan embellished the plain curtains with satin ribbons and tassels.

For More Info And Videos About TAIT-Exam Syllabus And Other Exam Visit My Channel
BADSHAHimp TAIT च्या 30 प्रश्नपत्रिका PDF Available Request 9765226781 YouTube WWW.YouTube.com/BADSHAHimp Subscribe My Channel

A.Decorated

B.Stained

C.Spoiled

D.Tore

Answer: A.Decorated

13

सूचना: खालील प्रश्नात एक आकृतिबंध दाखविला आहे आणि तो कळीची आकृती म्हणून नोंदला आहे. कागदाच्या मागच्या बाजूने बघितल्यास मूळची कळीची आकृती अचूकपणे कशी दिसेल हे तुम्हाला ठरवायचे आहे.

DIRECTIONS: In the following question, a design is given, marked as key figure. You have to determine which will be the exact view of the original key figure seen from the reverse side of the paper.

ہدایات: مندرجہ ذیل سوالات میں، اہم تصویر کے طور پر نمایاں ایک ڈیزائن دی گئی ہے- آپ کو اس بات کا تعین کرنا ہوگا کہ کاغذ کے دوسری طرف سے دیکھنے پر اصل اہم تصویر کی صحیح شکل کیا ہو گی-

मुख्य आकृती
Main Figure
اہم تصویر



उत्तरासाठी पर्यायी आकृत्या
Answer Figure
جواب کی تصویر

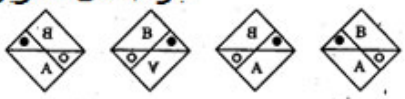

A B C D

A. (A)

B. (B)

C. (C)

D. (D)

Answer: C. (C)

14

गहाळ वर्ण शोधा.
Find the missing character.
. گمنام حرف کھوجیے ،

A	D	G
D	I	N
I	P	?

A. V

B. X

C. W

	D. Y
Answer:	C. W
15	पुढील जोडशब्द पूर्ण करा . ‘ विटी ----------’
	A.बिट्टी
	B.शिट्टी
	C.दांडू
	D.गल्लोल
Answer:	C.दांडू
16	संख्या पॅड एक निर्देशक बाण म्हणून कार्य करण्यासाठी, आपण दाबतो ..... . To make the number pad act as a directional arrow, we press ..... . نمبر پیڈ کو سمتی ایرو کے طور پر استعمال کرنے کے لئے، ہم -------- دباتے ہیں۔
	A.नम लॉक A.Num lock A.نم لاک
	B.कॅप्स लॉक B.Caps lock B.کیپس لاک
	C.ऍरो लॉक C.Arrow lock C.ایرو لاک
	D.शिफ्ट D.Shift D.شفٹ
Answer:	D.शिफ्ट D.Shift D.شفٹ

For More Info And Videos About TAIT-Exam Syllabus And Other Exam Visit My Channel
TAIT च्या 30 प्रश्नपत्रिका PDF
BADSHAHimp Available Request 9765226781
WWW.YouTube.com/BADSHAHimp
Subscribe My Channel

17 ज्या विहिरींना वर खाली जाण्यासाठी पारऱ्या असतात त्यांना म्हणतात:

The wells having steps for going down and coming up are known as:

وہ کنوئیں جسمیں نیچے جا نے اور واپس آنے کے لئے زینوں کا استعمال کیا جاتا ہے ؛ اسکو کہتے ہیں

A.पायरीच्या विहिरी
A.Step wells
A. مرحلہ کنواں

B.कारागीराचा विहीर
B.Artisan's well
B. کاریگر کا کنواں

C.ट्युब विहिर
C.Tube wells
C. ٹیوب ویل

D.वरीलपैकी सर्व
D.All of these
D. ان میں سے سب

Answer: A.पायरीच्या विहिरी
A.Step wells
A. مرحلہ کنواں

18 जर एखादा विद्यार्थी शाळा सुटल्यावर आपल्याला मारण्याची धमकी देतो आणि आपल्याला माहित आहे कि तो विद्यार्थी खूप प्रसिध्द आहे मग अश्या परिस्थितीत आपण काय करणार?

If a student gives threat to assault you after the school and you know that the student is notorious what will you do in this condition?

اگر ایک طالب علم آپ کو اسکول کے بعد حملہ کرنے کی دھمکی دیتا ہے اور آپ جانتے ہیں کہ طالب علم بدنام بھی ہے تو آپ اس حالت میں کیا کریں گے؟

A.आपण आपली चूक कबूल करणार व माफी मागणार
A.You will feel sorry and accept your mistake
A.آپ افسوس کریں گے اور اپنی غلطی کو قبول کریں گے

B.आपण काही गुंड विद्यार्थ्यांच्या सहाय्याने त्याला प्रतिउत्तर देणार
B.You react against him through some goonda elements
B.آپ ان کے خلاف کچھ غنڈا عناصر کے ذریعے ردعمل کریں گے

C.आपण त्याला धमकी देऊन त्याचे आव्हान स्वीकारू
C.You will give him a threat and accept the challenge
C.آپ بھی اسے دھمکی دیں گے اور چیلنج کو قبول کریں گے

For More Info And Videos About TAIT-Exam Syllabus And Other Exam Visit My Channel
TAIT च्या 30 प्रश्नपत्रिका PDF
BADSHAHimp Available Request 9765226781
WWW.YouTube.com/BADSHAHimp
Subscribe My Channel

D.आपण आपला राग शांत करण्याचा प्रयत्न करू व योग्यरीतीने हे प्रकरण सोडवू.
D.You will try to pacify the anger and settle down the issue in a favorable direction.
D.آپ غصے کو ٹھنڈا کرنے کی کوشش کریں گے اور مسئلہ کو درست سمت میں حل کریں گے.

Answer: D.आपण आपला राग शांत करण्याचा प्रयत्न करू व योग्यरीतीने हे प्रकरण सोडवू.
D.You will try to pacify the anger and settle down the issue in a favorable direction.
D.آپ غصے کو ٹھنڈا کرنے کی کوشش کریں گے اور مسئلہ کو درست سمت میں حل کریں گے.

19 जर आपल्यासाठी काम करणारा कारकून आपल्याला विनाकारण त्रास देत आहे, आपल्याला हे संपवण्यासाठी काय करावे वाटेल?

If your salary clerk is harassing you unnecessarily, what would you like to do to resolve it?

اگر آپ کا تنخواہ دینے والا کلرک آپ کو غیر ضروری طور پر پریشان کر رہا ہے تو، آپ اسے حل کرنے کے لئے کیا کریں گے؟

A.आपण त्याला मारण्याची धमकी देणार
A.You will threat him with physical assault
A.آپ اسے جسمانی حملہ کر کے ڈرائیں گے

B.आपण त्याला योग्यरीतीने समजण्यास भाग पडू
B.You will force him to deal in a civilized manner
B.آپ اسے ایک مہذب طریقے سے کام کرنے کے لئے مجبور کریں گے

C.आपण त्याला दुर्लक्ष करू
C.You will neglect him
C.آپ اسے نظرانداز کریں گے

D.आपल्याला दरमाह त्याच्याशी काम असते म्हणून आपण गप्प बसू.
D.You will keep silence as you deal with him every month.
D.آپ خاموش رہیں گے،کیونکہ آپکا ہر مہینے اس کے ساتھ واسطہ پڑے گا.

Answer: B.आपण त्याला योग्यरीतीने समजण्यास भाग पडू
B.You will force him to deal in a civilized manner
B.آپ اسے ایک مہذب طریقے سے کام کرنے کے لئے مجبور کریں گے

20 A ही B ची बहीण आहे. C ही B ची आई आहे. D हा C चा पती आहे. E ही D ची आई आहे, मग A चे D सोबत नाते आहे?

A is sister of B. C is mother of B. D is husband of C. E is mother of D, then how is A related to D?

B A کی بہن ہے. B C کی ماں ہے. C D کا شوہر ہے. D E کی ماں ہے، تو A کا D سے کیا رشتہ تھا؟

A.आईची आई
A.Maternal grandmother
A.دادی

B.आईचे वडील
B.Maternal grandfather
B.دادا

C.मुलगी
C.Daughter
C.بیٹی

D.यापैकी एकही नाही
D.None of these
D.ان میں سے کوئی نہیں

Answer: C.मुलगी
C.Daughter
C.بیٹی

21 सूचना: खाली दिलेल्या विधान (A) आणि कारण (R) साठी, खालील पैकी योग्य पर्याय निवडा:

विधान (A): कान मानवी शरीरात एक महत्त्वाची भूमिका बजावतात.
कारण (R): कान शरीराचे संतुलन राखण्यात मदत करतात.

DIRECTION: For the Assertion (A) and Reason (R) given below, choose the correct alternative from the following:
Assertion (A): Ears play an important role in human bodies.
Reason (R): Ears help in maintaining balance of the body.

ہدایت: نیچے دئیے گئے اسرشن (A) اور (R) میں سے صحیح متبادل منتخب کریں وجہ کے لئے، مندرجہ ذیل:

اسرشن (A): کان انسانی جسم میں ایک اہم کردار ادا کرتے ہیں۔
وجہ (R): کان جسم کے توازن کو برقرار رکھنے میں مدد کرتے ہیں۔

A.दोन्ही (A) आणि (R) सत्य आहेत आणि (R) (A) च योग्य स्पष्टीकरण आहे
A.Both (A) and (R) are true and (R) is the correct explanation of (A)
A. (A) اور (R) دونوں صحیح ہیں اور (R) (A) کی درست وضاحت ہے

B.दोन्ही (A) आणि (R) खरे आहेत, परंतु (R) (A) च योग्य स्पष्टीकरण नाही
B.Both (A) and (R) are true, but (R) is not the correct explanation of (A)
B. (A) اور (R) دونوں صحیح ہیں، لیکن (R) (A) کی درست وضاحت نہیں ہے

C.(A) सत्य आहे, परंतु (R) खोटे आहे
C.(A) is true, but (R) is false
C. (A) صحیح ہے، لیکن (R) غلط ہے

D.(A) खोटे आहे, परंतु (R) सत्य आहे
D.(A) is false, but (R) is true
D. (A) غلط ہے، لیکن (R) صحیح ہے

Answer: A.दोन्ही (A) आणि (R) सत्य आहेत आणि (R) (A) च योग्य स्पष्टीकरण आहे
A.Both (A) and (R) are true and (R) is the correct explanation of (A)
A. (A) اور (R) دونوں صحیح ہیں اور (R) (A) کی درست وضاحت ہے

22 आपण आपल्या वैयक्तिक कामात मग्न आहात आणि तेवढ्यातच आपल्या शेजारील निवृत्त झालेली व्यक्ती आपल्याशी गप्पा मारण्यास भेटायला आलेली आहे. अशावेळी आपण त्या व्यक्तीसोबत कसे वागणार?

You are very busy in your personal work meanwhile your neighboring retired person visits you in a relaxed and gossiping mood. In such a time how would you like to behave with that person?

آپ اپنے ذاتی کام میں بہت مصروف ہیں اس وقت آپ کا پڑوسی ریٹائرڈ شخص آپ کو آرام دہ اور پرسکون موڈ میں ملنے آ جاتا ہے۔ اس وقت آپ اس شخص کے ساتھ کیسے سلوک کریں گے؟

A.आपण त्याचे संभाषण बंद करण्यासाठी आपले वर्तन चुकीचे दाखवणार
A.You exhibit passive attitude in order to discourage his conversation
A.آپ اسکی گفتگو کی حوصلہ شکنی کے لئے غیر فعال رویے کا مظاہرہ کرتے ہیں

B.आपल्याला सुध्दा त्यांच्या सोबत बरे वाटत आहे हे समजून तो सहवास आनंदात घालवू
B.You enjoy the company by thinking that you too feel relaxed with him
B.آپ یہ سوچتے ہوئے اس کی معیت سے لطف اندوز ہوتے ہیں کہ آپ بھی اس کے ساتھ آرام دہ محسوس کررہے ہیں

C.आपण त्यांना आदराने बोलू पण त्यांना आपल्या मर्यादित वेळेची माहिती देऊ
C.You give due honor but tell him about the time-limit
C.آپ اس کو عزت دیتے ہیں لیکن اسے وقت کی کمی کے بارے میں بتائیں گے

D.आपण रिकामेच बसू आणि त्यांच्या जाण्याचा विचार करू.
D.You sit as an idle person and think of his departure.
D.آپ بےکار شخص کی طرح بیٹھ کر اس کے جانے کے بارے میں سوچتے ہیں.

Answer: C.आपण त्यांना आदराने बोलू पण त्यांना आपल्या मर्यादित वेळेची माहिती देऊ
C.You give due honor but tell him about the time-limit
C.آپ اس کو عزت دیتے ہیں لیکن اسے وقت کی کمی کے بارے میں بتائیں گے

23

प्रश्नचिन्हाच्या जागी येऊ शकते असा पर्याय निवडा: $\frac{\sqrt{?}}{27} = 4$

Specify the choice which gives the number that would replace the question mark : $\frac{\sqrt{?}}{27} = 4$

$\frac{\sqrt{?}}{27} = 4$: ایسا منتخب کریں جو سوالیہ نشان کا متباد بن سکے

A. 108

For More Info And Videos About TAIT-Exam Syllabus And Other Exam Visit My Channel
TAIT च्या 30 प्रश्नपत्रिका PDF Available Request 9765226781
WWW.YouTube.com/BADSHAHimp Subscribe My Channel
BADSHAHimp

B. 10664

C. 11664

D. 1664

Answer: C. 11664

24 _____ व_____ एडीएचडी चे वैशिष्ट आहेत

_____ &_____ are features of ADHD

_____ اور _____ اے ڈی ایچ ڈی کے فیچر ہیں۔

A.हेतू आणि अस्वस्थता
A.Intention & impulsivity
A.نیت اور اضطرار

B.हेतू आणि अंतर्गत
B.Intention & Internal
B.نیت اور داخلی

C.अती संवेदनशिल आणि हेतू
C.Hyper sensivity & intention
C. بڑھی ہوئی حساسیت اور نیت

D.अनावधान आणि अती संवेदनशिल अस्वस्थता
D.Inattention & Hyper sensivity impulsivity
D.عدم توجہ اور بڑھی ہوئی حساسیت و اضطرار

Answer: D.अनावधान आणि अती संवेदनशिल अस्वस्थता
D.Inattention & Hyper sensivity impulsivity
D.عدم توجہ اور بڑھی ہوئی حساسیت و اضطرار

25 रांगेच्या दोन्ही टोकांकडून मी सातव्या स्थानावर आहे. तर रांगेत एकूण किती लोक आहेत ?

I am seventh in the queue from either end. How many people are there in the queue?

میں کتار کے دونوں طرف سے ساتوا ہوں. کتار میں کتنے لوگ ہے؟

A.10
A.10
A.10

For More Info And Videos About TAIT-Exam Syllabus And Other Exam Visit My Channel
TAIT च्या 30 प्रश्नपत्रिका PDF
BADSHAHimp Available Request 9765226781
WWW.YouTube.com/BADSHAHimp
Subscribe My Channel

B.11
B.11
B.11

C.13
C.13
C.13

D.14
D.14
D.14

Answer: C.13
C.13
C.13

26 सहा मुलाच्या गटामध्ये, Q हा P पेक्षा उंच आहे पण L इतका उंच नाही. M हा N आणि O पेक्षा उंच आहे पण P इतका उंच नाही.

In a group of six children, Q is taller than P but not as tall as L. M is taller than N and O, but not as tall as P.
Who is the shortest among them?

چھ بچھوں کی جماعت میں، Q P سے لمبا مگر L سے لمبا نہیں ہے.M N اور O سے لمبا مگر P سے لمبا نہیں ہے جتنا
ان میں سے سب سے چھوٹا کون ہے؟

A.N
A.N
A.N

B.O
B.O
B.O

C.M
C.M
C.M

D.अपुरी माहिती
D.Data inadequate
D.ڈیٹا ناکافی

Answer: D.अपुरी माहिती
D.Data inadequate
D.ڈیٹا ناکافی

For More Info And Videos About TAIT-Exam Syllabus And Other Exam Visit My Channel
TAIT च्या 30 प्रश्नपत्रिका PDF
BADSHAHimp Available Request 9765226781 WWW.YouTube.com/BADSHAHimp
Subscribe My Channel

27 जर गुहेला भोक म्हटले, भोकाला घरटे म्हटले, घरट्याला बोगदा म्हटले, बोगद्याला बिळ म्हटले, आणि बिळाला बिल म्हटले. तर पक्षी कोठे राहतो?

If cave is called hole, hole is called nest, nest is called tunnel, tunnel is called burrow and burrow is called bill. Where a bird live?

اگر غار کو سوراخ، سوراخ کو گھونسلا، گھونسلے کو سرنگ، سرنگ کو بل اور بل کو مسودہ کہا جائے تو، پرندہ کہاں رہتا ہے؟

A.भोक
A.Hole
A.سوراخ

B.गुहा
B.Cave
B.غار

C.घरटे
C.Nest
C.گھونسلا

D.बोगदा
D.Tunnel
D.سرنگ

Answer: D.बोगदा
D.Tunnel
D.سرنگ

28 खालीलपैकी काय मानसिक क्षेत्राचा भाग आहे

Which of the following is part of psychosocial domain

مندرجہ ذیل میں سے کون نفسی سماجی ڈومین کا حصہ ہے

A.कृतिकौशल्ये
A.Motor skills
A.موٹر کی مہارت

B.वर्तन शैली
B.Style of behaving
B.برتاو کرنے کا طرز

C.स्मृती
C.Memory
C.میموری

D.यांपैकी कोणतीही नाही
D.None of these
D. ان میں سے کوئی نہیں

Answer: B.वर्तन शैली
B.Style of behaving
B.برتاو کرنے کا طرز

29 शेकन बेबी सिन्ड्रोम याचा एक प्रकार आहे

Shaken Baby Syndrome is a form of

ہیجان میں مبتلا بچہ سنڈروم ایک قسم ہے کس کی

A.बाल शोषण
A.Child Abuse
A.بچہ کے ساتھ تشدد

B.बालपणातील अपघात
B.Accident during childhood
B.بچپن میں حادثہ

C.जन्मजात दोष
C.Birth defects
C.پیدائشی نقص

D.वरीलपैकी कोणतेही नाही
D.none of the above
D.درج بالا میں سے کوئی نہیں

Answer: A.बाल शोषण
A.Child Abuse
A.بچہ کے ساتھ تشدد

30 प्रियांका पूर्वेला चालायला सुरुवात करते आणि 3 किमी अंतर कापते. मग, प्रियांका उजवीकडे वळते आणि 4 किमी चालते. तर ती सुरुवातीच्या ठिकाणापासून किती दूर आहे?

Priyanka start walking towards east and covers 3km. Then priyanka turns right and walks 4 km. How far is she from the starting point?

پرینکا نے مشرق کی طرف چلنا شروع کیا اور 3 کلومیٹر کا فاصلہ طے کیا۔ پھر، پرینکا دائیں مڑی اور 4 کلومیٹر تک چلی۔ شروعاتی نقطہ سے وہ کتنی دور ہے؟

A.10 किमी
A.10 km
A.10 کلومیٹر

B.8 किमी
B.8 km
B.8 کلومیٹر

C.5 किमी
C.5 km
C.5 کلومیٹر

D.4 किमी
D.4 km
D.4 کلومیٹر

Answer: C.5 किमी
C.5 km
C.5 کلومیٹر

31 बुल-रन, बेअर-रन या संकल्पना कशामध्ये वापरल्या जातात –

Bull-Run, Bear – Run are terms used in –

بُل رن،بئر رن اصطلاح کا استعمال ہوتا ہے۔

A.रग्बी
A.Rugby
A.رگبی میں

B.कबड्डी
B.Kabaddi
B.کبڈی میں

C.शेअर बाजार
C.Share- Markets
C.شیئر مارکیٹ میں

D.ऑलिम्पिक्स
D.Olympics
D.اولمپک میں

Answer:
C.शेअर बाजार
C.Share- Markets
C.شیئر مارکیٹ میں

32
सरळ रूप द्या:
5556 + 6329 + 7709 + 2134 + 8642 =?

Simplify:
5556 + 6329 + 7709 + 2134 + 8642 =?

آسان بنائیں:
5556 + 6329 + 7709 + 2134 + 8642= ?

A.23145
A.23145
A.23145

B.12378
B.12378
B.12378

C.30370
C.30370
C.30370

D.85230
D.85230
D.85230

Answer:
C.30370
C.30370
C.30370

33

सूचना: खालील प्रश्नात कागदाच्या एक तुकड्याला (चौकोनी / गोलाकार / त्रिकोणी) घड्या घातल्या आहेत व भोके पाडली आहेत. हा कागद उलगडल्यावर प्रश्नातील आकृतीप्रमाणे दिसतो. उत्तरादाखल पर्यायांमधून अशी आकृती निवडा जी उलगडल्यावर कागदाचे स्वरूप प्रश्नात दाखविल्याप्रमाणे दिसेल.

DIRECTIONS: In the following question a sheet (square/circle/triangle) of paper is folder and punch is made. When unfolded the paper sheet looks like the question figure. See the answer figures and select the one that follows the manner in which the paper is folded and punch is made.

ہدایات: مندرجہ ذیل سوالات میں، کاغذ کی شیٹ (مربع / دائرہ / مثلث) ایک فولڈر ہے اور اس میں چھید بنایا گیا ہے- جب کاغذ کی شیٹ کو کھولا جاتا ہے تو شیٹ سوال کے تصویر کی طرح نظر آتی ہے- جواب کی تصاویر کا ملاحظہ کریں اور ان میں سے ایک ایسی تصویر کو منتخب کریں جو اس طریقے کی پیروی کرتا ہے جس میں کاغذ کو موڑا گیا ہے اور چھید بنایا گیا ہے-

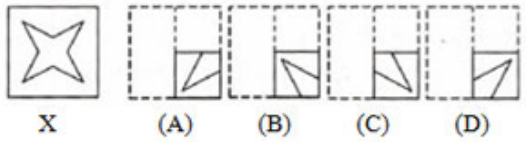

A. (A)

B. (B)

C. (C)

D. (D)

Answer: C. (C)

34

सूचना: खालील प्रश्नात उत्तरातील पर्यायांपैकी कोणत्या पर्यायी आकृतीत प्रश्नातील आकृती अंतर्भूत आहे?

DIRECTIONS: In the given question find the answer figure in which question figure is embedded.

ہدایات: دیئے گئے سوال میں سے اس جواب والی تصویر کو تلاش کریں جس میں سوال کی تصویر منسلک ہے

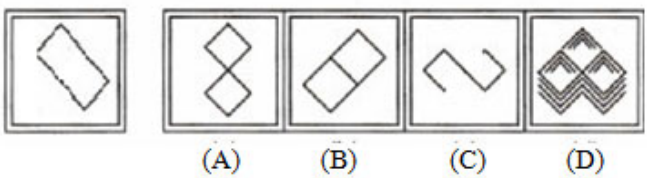

A. (A)

B. (B)

C. (C)

D. (D)

Answer: C. (C)

35 वाफेवर चालणाऱ्या इंजनचा फ्लायव्हील एक महत्वाचा भाग आहे कारण ते -

Flywheel is an important part of a steam engine because it -

فلائی وہیل (اڑن پہیہ) ایک بھاپ انجن کا اہم حصہ ہے کیونکہ یہ ____

A.इंजनला सामर्थ्य देते
A.Gives strength to engine
A.انجن کو طاقت بخشتا ہے

B.इंजनला गतीमान करते
B.Accelerates the speed of engine
B.انجن کی رفتار کو بڑھاتا ہے

C.इंजनला गती समान ठेवण्यात मदत करते
C.Helps the engine in keeping speed uniform
C.رفتار کو یکساں رکھنے میں انجن کی مدد کرتا ہے

D.जडत्वाचे क्षण कमी करते
D.Decrease the moment of inertia
D.انرشنیا کی حرکت کو کم کرتا ہے

Answer: C.इंजनला गती समान ठेवण्यात मदत करते
C.Helps the engine in keeping speed uniform
C.رفتار کو یکساں رکھنے میں انجن کی مدد کرتا ہے

36 समाजात, आपल्यातील मुल्यांची पुनरावृत्ती करण्यासाठी आपण आपल्याला कोणत्या भूमिकेत पाहू इच्छितो?

In a society, what type of role do you feel for yourself to resurrect values in it?

ایک معاشرے میں، آپ اقدار کو دوبارہ شروع کرنے کے لئے اپنے لئے کس قسم کا کردار محسوس کرتے ہیں؟

A.प्रभावी
A.Effective
A.مؤثر

B.अप्रभावी
B.Un-effective
B.غیر موثر

C.सामान्य
C.Normal
C.عمومی

D.भाग घेणार नाही
D.Nothing to contribute.
D.کچھ حصہ نہیں لیں گے.

Answer: A.प्रभावी
A.Effective
A.مؤثر

37 निर्देश: खालील व्यवस्था काळजीपूर्वक वाचा आणि खाली दिलेल्या प्रश्नांची उत्तरे द्या.

P J % 5 D $ L O 3 # A Q 4 @ U F T * Z 8 K 2 M & H

उपरोक्त व्यवस्थेमधे अशा किती संख्या आहेत ज्या तत्काळ चीन्हापुर्वी आणि व्यंजना नंतर येतात?

DIRECTIONS: Study the following arrangement carefully and answer the questions given below.

P J % 5 D $ L O 3 # A Q 4 @ U F T * Z 8 K 2 M & H

How many such numbers are there in the above arrangement each of which is immediately preceded by a symbol and immediately followed by a consonant?

ہدایت نیچے دی گی ترتیب کو پڑھئے اور سہی جواب دیجئے

P J % 5 D $ L O 3 # A Q 4 @ U F T * Z 8 K 2 M & H

اپری ترتیب مے ایسے کتنے حرف ہیں جنکے پہلے نشانیاں ہیں اور انکے پیچھے کونسونانٹس ہیں؟

A.एक
A.One
A.ایک

B.दोन
B.Two
B.دو

C.तीन
C.Three
C.تین

D.काहीही नाही
D.None
D.کوئی نہیں

Answer: A.एक
A.One
A.ایک

38

सूचना: दिलेल्या चारांपैकी वेगळी (असंबद्ध) असणारी आकृती शोधून काढा.

DIRECTIONS: Find the odd from the given four figures.

ہدایات: دی گئی 4 تصاویر میں سے متفرق تلاش کریں۔

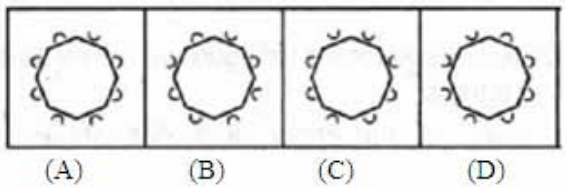

A. (A)

B. (B)

C. (C)

D. (D)

Answer: A. (A)

39 सूचना: खालील माहिती काळजीपूर्वक वाचा आणि खालील प्रश्नांची उत्तरे द्या:
कंपनीचे सात प्रतिनिधि -सागर,नीलू, रीमा, श्वेता, गरिमा, पार्थ आणि मोहित तीन वेगवेगळ्या देशांमध्ये गेले, ते देश आहेत दक्षिण आफ्रिका, ऑस्ट्रेलिया आणि फ्रान्स. त्यांच्यापैकी प्रत्येकाने आठवड्याच्या वेगवेगळ्या दिवशी प्रवास केला (कोणत्याही दोन व्यक्तींनी एकाच दिवशी प्रवास केला नाही) सोमवार पासून सुरुवात करुन, रविवारी समाप्त केला. किमान दोन लोकांनी प्रत्येक देशात प्रवास केला आणि दक्षिण आफ्रिका हा एकच असा देश होता जिथे तीन लोक गेले.
सागर दक्षिण आफ्रिकेला सोमवारी गेला. पार्थ ऑस्ट्रेलियाला गेला पण तो ना मंगळवारी गेला ना शनिवारी गेला. मोहित रविवारी गेला पण तो फ्रान्सला गेला नाही. जी व्यक्ती ऑस्ट्रेलियाला गेली तिने मंगळवारी प्रवास केला आणि जी फ्रान्सला गेली तिने शनिवारी प्रवास केला. गरिमाने बुधवारी प्रवास केला. रिमा दक्षिण आफ्रिकेला गेली पण गुरुवारी गेली नाही. निलू फ्रान्सला गेली नाही.
सात प्रतिनिधिंपैकी कोणी शनिवारी प्रवास केला?

DIRECTIONS: Study the following information carefully and answer the questions given below.
Seven representatives of a company — Sagar, Nilu, Reema, Shweta, Garima, Parth and Mohit travelled to three different countries i.e. South Africa, Australia and France. Each of them travelled on different days of the week (no two persons travelled on the same day), starting on Monday and ending on Sunday. Minimum two people travelled to each country and South Africa is the only country to which three people travelled.
Sagar travelled to South Africa on ‘Monday. Parth travelled to Australia but neither on Tuesday nor on Saturday. Mohit travelled on Sunday but not to France. The one who travelled to Australia travelled on Tuesday and the one who travelled to France travelled on Saturday. Garima travelled on Wednesday. Reema travelled to South Africa but not on Thursday. Nilu did not travel to France.
Who amongst the seven representatives travelled on Saturday?

ہدایات: مندرجہ ذیل معلومات کو دھیان سے پڑھیں اور نیچے دیے گئے سوالوں کے جواب دیں۔
ایک کمپنی کے سات نمائندے – ساگر، نیلو، ریما، شویتا، گریما، پارتھ اور موہت نے تین مختلف ملکوں یعنی جنوبی افریقہ، آسٹریلیا اور فرانس کا سفر کیا۔ ان میں سے ہر ایک نے پیر سے شروع اور سنیچر کو ختم کرکے ہفتہ کے مختلف دنوں میں سفر کیا (کسی دو شخص نے ایک ہی دن سفر نہیں کیا)۔ کم سے کم دو افراد نے ہر ایک ملک کا سفر کیا اور جنوبی افریقہ واحد ملک ہے جس کا تین لوگوں نے سفر کیا۔
ساگر نے پیر کے دن جنوبی افریقہ کا سفر کیا۔ پارتھ نے آسٹریلیا کا سفر کیا لیکن نہ تو منگل کو اور نہ ہی سنیچر کے روز۔ موہت نے اتوار کو سفر کیا لیکن فرانس کا نہیں۔ جس نے آسٹریلیا کا سفر کیا اس نے منگل کے روز سفر کیا اور جس نے فرانس کا سفر کیا اس نے اس نے سنیچر کے دن سفر کیا۔ گریما نے بدھ کو سفر کیا۔ ریما نے جنوبی افریقہ کا سفر کیا لیکن جمعرات کو نہیں۔ نیلو نے فرانس کا سفر نہیں کیا۔
سات نمائندوں میں سے کون سنیچر کو سفر کر رہا ہے؟

A.श्वेता
A.Shweta
A.شویتا

B.निता
B.Nita
B.نیتا

C.रिचा
C.Richa
C.رچا

D.निर्धारित केले जाऊ शकत नाही.
D.Cannot be determined
D.تعین نہیں کیا جا سکتا ہے

Answer: A.श्वेता
A.Shweta
A.شویتا

40 एका छायाचित्रातील स्त्रीकडे बोट दाखवून, एक पुरुष म्हणतो, “ती माझ्या एकुलत्या मुलाच्या वडिलांच्या पत्नीची सासू आहे” त्या स्त्रीचे त्या पुरुषासोबत नाते काय?

Pointing to a woman in a photograph, a man says “She is the mother-in-law of the wife of the father of my only son”. How is the woman related to the man?

تصویر میں عورت کی طرف اشارہ کرکے، آدمی نے کہا " یے میرے واحد بیٹے کے باپ کی بیوی کی ساس ہے" . عورت کا آدمی سے کیا رشتہ تھا؟

A.मुलगी
A.Daughter
A.بیٹی

B.पत्नी
B.Wife
B.بیوی

C.सून
C.Daughter-in-law
C.بہو

D.आई
D.Mother
D.ماں

Answer: D.आई
D.Mother
D.ماں

41 सूचना: दोन विधाने आणि त्यानंतर चार निष्कर्ष, I, II, III आणि IV दिले आहेत. ही विधाने सामान्यतः ज्ञात वस्तुस्थितीपेक्षा भिन्न असली तरी सत्य आहेत असे समजा. दिलेल्यापैकी कोणता निष्कर्ष दिलेल्या विधानांवरुन नक्की काढता येऊ शकतो हे तुम्ही ठरवायचे आहे.तुमचे उत्तर सूचित करा.

विधाने:
I. सर्व चौरस आयत आहेत.
II. सर्व आयत पॉलिगॉन्स आहेत.

निष्कर्ष:

DIRECTION: Two statements are given following by four conclusions, I, II, III and IV. You have to consider that statements to be true, even if they seem to be at variance from commonly known facts. You are to decide which of the given conclusions can definitely be drawn from the given statements. Indicate your answer.

Statements:
I. All squares are rectangles.
II. All rectangles are polygons.

Conclusions:

ہدایات: دو سٹیٹمنٹ جوکہ چار خلاصوں پر مشتمل ہیں .I،II، III اور IV. اپ کو وہ سٹیٹمنٹ درست ماننا ہے، اگرچہ دکہنے میں وہ بہت سارے حقاٰق ست مطبقت رکہتی ہو۔ اپ کو دیے گے خلاصوں میں سے یقینی طور پر اسے اختیار کرنا ہے جو سٹیٹمنٹ سے نکلا ہو. اپنا جواب تلاش کرے.

اظہار بیان:
I.تمام چکور مستطیل ہوتے ہے.
II.تمام مستطیل پولیگون ہوتے ہے.

نتیجہ:

A.चौरस हा पॉलिगॉन नाही.
A.Square is not a polygon
A.چکور پولیگون نہیں ہوتے

B.चौरस हा पॉलिगॉन आहे.
B.Square is a polygon
B.چکور پولیگون ہوتا ہے.

C.चौरस हा आयत आणि पॉलिगॉन आहे.
C.Square is a rectangle and polygon
C.چکور مستطیل اور پولیگون ہوتا ہے.

D.यापैकी एकही नाही
D.None of these
D.ان میں سے کوئی بھی نہی.

Answer: C.चौरस हा आयत आणि पॉलिगॉन आहे.
C.Square is a rectangle and polygon
C.چکور مستطیل اور پولیگون ہوتا ہے.

42 _____ विशिष्ट उपक्रमासाठी प्राधान्य आहे.

_____ is a preference for a particular activity.

_____ کسی خاص کام کے لیے ترجیحی عنصر ہے ۔

A.आवड
A.Interests
A.دلچسپیاں

B.कौशल्य
B.Skills
B.مہارتیں

C.सृजनशीलता
C.Creativity
C.تخلیق

D.कल्पकता
D.Imagination
D.تصور

Answer: A.आवड
A.Interests
A.دلچسپیاں

43 **सूचना:** खाली A, B, C, आणि D नावाच्या चार आकृत्या दिल्या आहेत, त्यापैकी तीन आकृत्या एका श्रेणीत आहेत किंवा त्यांच्यात या ना त्या प्रकारे साम्य आहे, तर एक आकृती इतरांपेक्षा वेगळी आहे. वेगळी (असंबद्ध) असणारी आकृती निवडा.

DIRECTIONS: Three of the four figures marked A, B, C, and D are in sequence or similarity in some way or the other, while one of them is different from the rest. You have to choose the figure which is different (odd).

ہدایات: 4 تصاویر میں سے 3 پر A، B، C کا نشان لگایا گیا ہے اور D کسی ایک یا دوسری طرح سے ایک ترتیب یا مساوات میں ہیں، جبکہ ان میں سے ایک باقی سے الگ ہے- آپ کو ان میں الگ (عجیب) تصویر کو منتخب کرنا ہے-

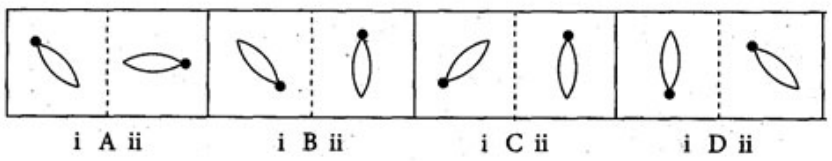

A. (A)

B. (B)

C. (C)

D. (D)

Answer: B. (B)

44 आपल्याला आपल्या मित्रांकडून पैसे उसने घेताना काहीच वाटत नाही. शिवाय आपण मशहूर पण आहात पैसे परत वेळेत न देण्यासाठी. कधीकधी आपण आपल्या लहान सहकार्यांना देखील या कृत्यात फसवतात. आपण भविष्यात त्यांच्याकडून कुठल्या प्रकारच्या आर्थिक व्यवहाराची अपेक्षा करणार?

You have no hitch in borrowing money from your friends. Moreover you are popular not to return it in time. Sometimes you do not spare even your very younger colleagues from this act of cheating. What type of monetary behavior you will expect from them in future?

اپنے دوستوں سے پیسہ لینے میں آپ کو کوئی جھجک نہیں ہے.علاوہ ازیں آپ وقت پر واپس نہ کرنے کےحوالے سے بھی مشہور ہیں۔ کبھی کبھی تم دھوکہ دہی کے اس عمل میں اپنے چھوٹے ساتھیوں کو بھی نہیں بخشتے۔ مستقبل میں ان سے کیسا مالیاتی رویہ متوقع ہوگا؟

A.आर्थिक देवाणघेवाण लक्षात ठेवून एक सुंदर नातेसंबंध
A.Sweet relations based on monetary exchanges
A.مالیاتی تبادلے پر مبنی میٹھے تعلقات

B.आपल्या चुकीच्या कृत्यामुळे आपण आपला चेहरा लपवणार
B.You hide your own face due to guilty consciousness
B.آپ مجرمانہ احساس کی وجہ سے اپنے چہرے کو چھپاتے ہیں

C.आपण अशी अपेक्षा करतो कि आपल्याला सार्वजनिक ठिकाणी कोणीही पैसे मागू नये
C.You expect that nobody should ask about his money in public places
C.آپ کی توقع ہے کہ عوامی جگہوں پر کوئی پیسے کا نہیں پوچھے گا

D.आपण स्वत:ला सुधारण्याचा प्रयत्न करू अन्यथा आपण आपली प्रतिमा गमावणार.
D.You try to improve yourself otherwise your prestige will be at stake.
D.آپ اپنے آپ کو بہتر بنانے کی کوشش کریں ورنہ آپ کا وقار نقصان پر ہوگا۔

Answer: D.आपण स्वत:ला सुधारण्याचा प्रयत्न करू अन्यथा आपण आपली प्रतिमा गमावणार.
D.You try to improve yourself otherwise your prestige will be at stake.
D.آپ اپنے آپ کو بہتر بنانے کی کوشش کریں ورنہ آپ کا وقار نقصان پر ہوگا۔

45 सूचना: दिलेल्या पर्यायांमधून वेगळे ते निवडा.

DIRECTIONS: Choose the odd one out from the given alternatives.

دیے گئے متبادل میں سے بے جوڑ کو چنیں۔

A.SBeTZ
A.SBeTZ
A.SBeTZ

B.KDuVB
B.KDuVB
B.KDuVB

C.DXiGR
C.DXiGR
C.DXiGR

D.PSbZT
D.PSbZT
D.PSbZT

Answer: D.PSbZT
D.PSbZT
D.PSbZT

46 स्वाती ही वाहिकाची सासू आहे जी दिशांतची मेव्हणी आहे. रवीश राह रोहितचा पिता आहे, जो दिशांतचा एकमेव भाऊ आहे. स्वातीचे दिशांतसोबत नाते काय?

Swati is mother-in-law of Vahika who is sister-in- law of Dishant. Raveesh is father of Ronit, the only brother of Dishant. How is Swati related to Dishant?

سواتی واہکا کی ساس ہے جو دشانت کی بھابی ہے. رویش رونت کا باپ ہے، جو دشانت کا واحد بھائی ہے. سواتی کا دشانت سے کیا رشتہ ہے؟

A.सासू
A.Mother-in-law
A.ساس

B.काकू
B.Aunt
B.چا چی

C.पत्नी
C.Wife
C.بیوی

D.आई
D.Mother
D.ماں

Answer: D.आई
D.Mother
D.ماں

47 सूचना: अर्थपूर्ण परिच्छेद निर्माण करण्यासाठी, खाली दिलेली (P), (Q) (R), (S) आणि (T) ही पाच वाक्ये योग्य अनुक्रमाने पुनर्रचना करा; त्यांनतर खालील प्रश्नांची उत्तर द्या.

P. मुंगीने त्याला सांगितले कि, ती हिवाळ्याची तयारी करत आहे कारण तेव्हा अन्न दुर्मिळ होईल.
Q. लवकरच हिवाळा सुरु झाला आणि नाकतोड्याला जगण्यासाठी अन्न उपलब्ध नव्हते, तर मुंग्या आपल्या उबदार घरट्यात मक्याचा आनंद घेत होत्या.
R. आपल्या घरट्याकडे मक्याच्या जाड कणीस घेऊन जाणाऱ्या मुग्या पाहून, तशी कठोर मेहनत करण्यापेक्षा आपल्यासोबत मौजमजा करण्यासाठी नाकतोड्यानें मुंगीला बोलावले.
S. त्यावर हसून नाकतोडा म्हणाला सध्याचा वर्तमानकाळ चांगला असताना हिवाळ्याची चिंता कशाला हवी
T. तो एक आंनदी दिवस होता आणि नाकतोडा गात, नाचत आनंदाने बागडत होता.

पुनर्रचना केल्यानंतर खालीलपैकी कोणते वाक्य चौथे असेल?

DIRECTION: Rearrange the following five sentences (P), (Q), (R), (S) and (T) in the proper sequence to form a meaningful paragraph; then answer the questions given below them.
P. The ant tells him that it is preparing for winter when food would be scarce.
Q. Winter soon begins, and the grasshopper has no food to survive, while the ants enjoy the corn in the warmth of their nest.
R. Upon seeing an ant carrying a heavy corn kernel to its nest, the grasshopper asks the ant to join him for some fun, instead of working hard like that.
S. The grasshopper laughs and says why care for winter when the present is good.
T. It was a pleasant day and the grasshopper was in a gay mood, singing and dancing around.

Which of the following should be the FOURTH sentence after rearrangement?

ہدایات: ان پانچ جملوں (P)، (Q)، (R)، (S) اور (T) کو با معنی پیرا بنانے کے لئے دوبارہ ترتیب دیجئے، پھر نیچے دے گئے سوالوں کے جواب دیجئے

P. چھینٹی نے اسے کہا کہ وو سردی کے لئے تیاری کر رہی ہے جب کھانے کی کمی ہوگی.
Q. جلد ہی سردی شرو ہو گی، ٹیڈا کو جینے کے لئے کھانا نہیں تھا، جب کہ چھینٹی اناج کہ مزا اپنے گھونسے کی گرمی میں لے رہی تھی.
R. جب اسے دیکھا کہ چھینٹی ایک بڑا اناج کہ دانا لے جا رہی ہے، تیڈے نے اسے کہا کہ انکے ساتھ مزا کرے،سخت محنت کرنے سے اچھا ہے.
S. ٹیڈا حصّہ اور کہا سردی کی فکر کیوں کرنی جب حاضر وقت اچھا چل رہا ہے.
T. بہت اچھا دن تھا اور ٹیڈا بہت خوش تھا ،گاتا اور ناچ رہا تھا.

دوبارہ ترییب دینے کے بعد کون سا جملہ چوتھا ہونا چاہیے؟

A.S
A.S
A.S

B.P
B.P
B.P

C.Q
C.Q
C.Q

D.T
D.T
D.T

Answer: A.S
A.S
A.S

48 सूचना: अर्थपूर्ण परिच्छेद निर्माण करण्यासाठी, खाली दिलेली (P), (Q) (R), (S) आणि (T) ही पाच वाक्ये योग्य अनुक्रमाने पुनर्रचना करा; त्यांनतर खालील प्रश्नांची उत्तर द्या.

P. मुंगीने त्याला सांगितले कि, ती हिवाळ्याची तयारी करत आहे कारण तेव्हा अन्न दुर्मिळ होईल.
Q. लवकरच हिवाळा सुरु झाला आणि नाकतोड्याला जगण्यासाठी अन्न उपलब्ध नव्हते, तर मुंग्या आपल्या उबदार घरट्यात मक्याचा आनंद घेत होत्या.
R. आपल्या घरट्याकडे मक्याच्या जाड कणीस घेऊन जाणाऱ्या मुग्या पाहून, तशी कठोर मेहनत करण्यापेक्षा आपल्यासोबत मौजमजा करण्यासाठी नाकतोड्यानें मुंगीला बोलावले.
S. त्यावर हसून नाकतोडा म्हणाला सध्याचा वर्तमानकाळ चांगला असताना हिवाळ्याची चिंता कशाला हवी
T. तो एक आंनदी दिवस होता आणि नाकतोडा गात, नाचत आनंदाने बागडत होता.

पुनर्रचना केल्यानंतर खालीलपैकी कोणते वाक्य पाचवे असेल?

DIRECTION: Rearrange the following five sentences (P), (Q), (R), (S) and (T) in the proper sequence to form a meaningful paragraph; then answer the questions given below them.
P. The ant tells him that it is preparing for winter when food would be scarce.
Q. Winter soon begins, and the grasshopper has no food to survive, while the ants enjoy the corn in the warmth of their nest.
R. Upon seeing an ant carrying a heavy corn kernel to its nest, the grasshopper asks the ant to join him for some fun, instead of working hard like that.
S. The grasshopper laughs and says why care for winter when the present is good.
T. It was a pleasant day and the grasshopper was in a gay mood, singing and dancing around.

Which of the following should be the FIFTH sentence after rearrangement?

ہدایات: ان پانچ جملوں (P)، (Q)، (R)، (S) اور (T) کو با معنی پیرا بنانے کے لئے دوبارہ ترتیب دیجئے، پھر نیچے دے گئے سوالوں کے جواب دیجئے

P. چھینٹی نے اسے کہا کہ وو سردی کے لئے تیاری کر رہی ہے جب کھانے کی کمی ہوگی.
Q. جلد ہی سردی شرو ہو گی، ٹیڈا کو جینے کے لئے کھانا نہیں تھا، جب کہ چھینٹی اناج کہ مزا اپنے گھونسے کی گرمی میں لے رہی تھی.
R. جب اسے دیکھا کہ چھینٹی ایک بڑا اناج کہ دانا لے جا رہی ہے، تیڈے نے اسے کہا کہ انکے ساتھ مزا کرے،سخت محنت کرنے سے اچھا ہے.
S. ٹیڈا حصّہ اور کہا سردی کی فکر کیوں کرنی جب حاضر وقت اچھا چل رہا ہے.
T. بہت اچھا دن تھا اور ٹیڈا بہت خوش تھا ،گاتا اور ناچ رہا تھا.

دوبارہ ترییب دینے کے بعد کون سا جملہ پانچوہ ہونا چاہیے؟

A.Q
A.Q
A.Q

B.P
B.P
B.P

C.R
C.R
C.R

D.S
D.S
D.S

Answer: A.Q
A.Q
A.Q

49 Fill in the blank with the correct article.
I studied _____French in high school for four years.

A.a

B.an

C.the

D.No article required

Answer: D.No article required

50 जर 60 किमी/तास गती असलेली ट्रेन, स्तंभाला 30 सेकंदामध्ये पार करत असेल, तर त्या ट्रेनची लांबी (मीटरमध्ये) काढा

If a train, with a speed of 60 km/h, crossed a pole in 30 seconds, the length of the train (in meters) is

اگر ایک ٹرین، 60 کلو میٹر / گھنٹہ کی رفتار سے، 30 سیکنڈ میں ایک کھمبہ پار کرتی ہے، تو ٹرین کی لمبائی (میٹر میں) ہے

A.1000
A.1000
A.1000

B.900
B.900
B.900

C.750
C.750
C.750

D.500
D.500
D.500

Answer: D.500
D.500
D.500

51 दोन समांतरभुज चौकोन समान पायांवर आणि समान समांतर रेषांदरम्यान उभे आहे. त्यांच्या क्षेत्रफळांचे गुणोत्तर:

Two parallelograms stand on equal bases and between the same parallels. The ratio of their areas is:

دو متوازی الاضلاع برابر بنیادوں اور اسی متوازی کے درمیان کھڑے ہیں۔ ان کے علاقوں کا تناسب یہ ہے:

A.1:1
A.1 : 1
A.1 : 1

B.2:1
B.2:1
B.2:1

C.1:3
C.1 : 3
C.1 : 3

D.1:2
D.1 : 2
D.1 : 2

Answer: A.1:1
A.1 : 1
A.1 : 1

52 आपल्या वर्गात दैवी गुण असलेल्या विद्यार्थ्यांसोबत आपण कसे वागणार?

How would you deal with gifted students in your class?

آپ اپنی کلاس میں گفٹڈ طالب علموں سے کس طرح پیش آئیں گے؟

A.दुर्दैवाने ते सामान्य विद्यार्थ्यांसाठी ते निराशेचे मुख्य कारण बनतात
A.Develop apathy because they become the source of frustration for normal ones
A.سرد رویہ پیدا کریں گے،کیونکہ وہ عام بچون کے لئے بے چینی کا سبب بن جاتے ہیں

B.त्यांना उत्कृष्ठतेने यश मिळवण्यासाठी उत्तेजित करणार
B.Try to motivate them to achieve at par excellence
B.کاکردگی حاصل کرنے کے لئے ان کی حوصلہ افزائی کرنے کی کوشش کریں گے

C.त्यांच्यावर दात खाऊन असणार कारण ते असाधारण प्रश्न विचारतात
C.Have a jealousy with them because they ask intelligent questions
C.ان کے ساتھ حسد ہوتا ہے کیونکہ وہ ذہین سوال پوچھتے ہیں

D.त्यांना शाळेतील शिकवणीत मग्न करणार व त्यांना सर्वसामान्यासारखे बनवण्याचे प्रयत्न करणार.
D.Engage them in class-room teaching and forcing them to be the commoner.
D.کلاس روم میں ان کو پڑھانے اور عام آدمی بننے پر مجبور کرنے میں مصروف رکھتےہیں.

Answer: B.त्यांना उत्कृष्ठतेने यश मिळवण्यासाठी उत्तेजित करणार
B.Try to motivate them to achieve at par excellence
B.کاکردگی حاصل کرنے کے لئے ان کی حوصلہ افزائی کرنے کی کوشش کریں گے

53 'संदिग्ध' या शब्दाचा विरुद्धार्थी शब्द कोणता ?

A.संशयित

B.अस्पष्ट

C.संशय घेणारा

D.स्पष्ट

Answer: D.स्पष्ट

54 नैराश्य येण्याची शक्यता असणाऱ्या व्यक्तिमत्त्वचे वर्गीकरण प्रकार _____ व्यक्तिमत्त्व म्हणून करण्यात येते

A personality characterized by proneness to depression is classified as type ____ personality

ڈپریشن کے شکار ایک شخص کی زمرہ بندی کس نوعیت _____کی شخصیت کے طور پر جائے گی

A.प्रकार A
A.Type A
A.ٹائپ اے

B.प्रकार B
B.Type B
B.ٹائپ بی

C.प्रकार D
C.Type D
C.ٹائپ ڈی

D.प्रकार C
D.Type C
D.ٹائپ سی

Answer: C.प्रकार D
C.Type D
C.ٹائپ ڈی

55 दिलेली अदलाबदल : चिन्हे + आणि ÷, तसेच आकडे 2 आणि 5 ; तर 18 + 6 x 3 ÷ 2 – 5 चे मूल्य किती ?

Given interchanges: signs + and ÷, and numbers 2 and 5; then the value of 18 + 6 × 3 ÷ 2 - 5 is

دیئے گئے تبادلے: علامات + اور ÷، اور نمبر 2 اور 5؛ تو 18 + 6×3÷ 2 - 5کی تعداد ہے

A.12
A.12
A.12

B.14
B.14
B.14

C.16
C.16
C.16

D.18
D.18
D.18

Answer: A.12
A.12
A.12

56 सूचना: अर्थपूर्ण परिच्छेद निर्माण करण्यासाठी, खाली दिलेली (P), (Q) (R), (S) आणि (T) ही पाच वाक्ये योग्य अनुक्रमाने पुनर्रचना करा; त्यांनतर खालील प्रश्नांची उत्तर द्या.

P. मुंगीने त्याला सांगितले कि, ती हिवाळ्याची तयारी करत आहे कारण तेव्हा अन्न दुर्मिळ होईल.
Q. लवकरच हिवाळा सुरु झाला आणि नाकतोड्याला जगण्यासाठी अन्न उपलब्ध नव्हते, तर मुंग्या आपल्या उबदार घरट्यात मक्याचा आनंद घेत होत्या.
R. आपल्या घरट्याकडे मक्याच्या जाड कणीस घेऊन जाणाऱ्या मुग्या पाहून, तशी कठोर मेहनत करण्यापेक्षा आपल्यासोबत मौजमजा करण्यासाठी नाकतोड्यानें मुंगीला बोलावले.
S. त्यावर हसून नाकतोडा म्हणाला सध्याचा वर्तमानकाळ चांगला असताना हिवाळ्याची चिंता कशाला हवी
T. तो एक आंनदी दिवस होता आणि नाकतोडा गात, नाचत आनंदाने बागडत होता.

पुनर्रचना केल्यानंतर खालीलपैकी कोणते वाक्य तिसरे असेल?

DIRECTION: Rearrange the following five sentences (P), (Q), (R), (S) and (T) in the proper sequence to form a meaningful paragraph; then answer the questions given below them.
P. The ant tells him that it is preparing for winter when food would be scarce.
Q. Winter soon begins, and the grasshopper has no food to survive, while the ants enjoy the corn in the warmth of their nest.
R. Upon seeing an ant carrying a heavy corn kernel to its nest, the grasshopper asks the ant to join him for some fun, instead of working hard like that.
S. The grasshopper laughs and says why care for winter when the present is good.
T. It was a pleasant day and the grasshopper was in a gay mood, singing and dancing around.

Which of the following should be the THIRD sentence after rearrangement?

ہدایات: ان پانچ جملوں (P)، (Q)، (R)، (S) اور (T) کو با معنی پیرا بنانے کے لئے دوبارہ ترتیب دیجئے، پھر نیچے دے گئے سوالوں کے جواب دیجئے

P. چھینٹی نے اسے کہا کہ وو سردی کے لئے تیاری کر رہی ہے جب کھانے کی کمی ہوگی.
Q. جلد ہی سردی شرو ہو گی، ٹیڈا کو جینے کے لئے کھانا نہیں تھا، جب کہ چھینٹی اناج کہ مزا اپنے گھونسے کی گرمی میں لے رہی تھی.
R. جب اسے دیکھا کہ چھینٹی ایک بڑا اناج کہ دانا لے جا رہی ہے، تیڈے نے اسے کہا کہ انکے ساتھ مزا کرے،سخت محنت کرنے سے اچھا ہے.
S. ٹیڈا حصّہ اور کہا سردی کی فکر کیوں کرنی جب حاضر وقت اچھا چل رہا ہے.
T. بہت اچھا دن تھا اور ٹیڈا بہت خوش تھا ،گاتا اور ناچ رہا تھا.

دوبارہ ترییب دینے کے بعد کون سا جملہ تیسرا ہونا چاہیے؟

A.P
A.P
A.P

B.Q
B.Q
B.Q

C.R
C.R
C.R

D.S
D.S
D.S

Answer: A.P
A.P
A.P

57 स्पेनची राजधानी _____ ही आहे

The capital of Spain is –

اسپین کی راجدھانی ۔

A.बार्सेलोना
A.Barcelona
A.بار سیلونا

B.माद्रिद
B.Madrid
B.میڈرڈ

C.आयबिझा
C.Ibiza
C.ابیزا

D.अल्हांब्रा
D.Alhambra
D.الحمراء

Answer: B.माद्रिद
B.Madrid
B.میڈرڈ

58 आपला सहकारी त्याच्या कनिष्ठांकडून खोटे बोलून पैसे गोळा करतो व आपल्या वरिष्ठांना उपहार देऊन खुश करतो इत्यादी. सर्व कनिष्ठांना याची कल्पना आहे पण त्याच्या विरुद्ध कोणीच बोलत नाही. ह्या समस्येचा निवारण आपण कसा करणार?

A colleague collects money from his juniors on pretext to oblige the superiors with precious gifts etc. All juniors know but cannot revolt against him. How could you find a suitable solution of this problem?

ایک ساتھی افسران کو قیمتی تحائف دینےکے لئے اپنے جونیرز سے پیسہ جمع کرتا ہے۔ تمام جونیرز کو معلوم ہے لیکن اس کے خلاف بغاوت نہیں کر سکتے۔ آپ کو اس مسئلے کا مناسب حل کیسے مل سکتا ہے؟

A.तो आपल्या पैश्यावर मजा करत आहे हे आपल्या समुहात सांगून त्याची बदनामी करणार
A.You abuse him in a group as he is enjoying your money
A.آپ ایک گروپ میں اس کی تذلیل کرتے ہیں جبکہ وہ آپ کے پیسے سے لطف اندوز ہو رہا ہوتا ہے

B.तो जो काही करत आहे, ते स्वबळावर हे त्याला समजवून सांगा
B.You preach him whatever he does, does it independently
B.آپ اس کو سمجھاتے ہیں کہ اسے جو کچھ بھی کرنا ہے وہ آزادانہ طور پر کرے

C.त्याच्या जाळ्यापासून स्वत:ला दूर ठेवणार
C.You keep yourself alert from his dragnet
C.آپ اپنے آپ کو اس کے ردعمل سے خبردار رکھتےہیں

D.आपण त्याला सांगणार पैसे मागणे हे एक प्रकारचे पाप आहे.
D.You tell him that begging of money is a sinful act.
D.-آپ اسے بتاتے ہیں کہ پیسہ مانگنا ایک گناہ کا کام ہے

Answer: B.तो जो काही करत आहे, ते स्वबळावर हे त्याला समजवून सांगा
B.You preach him whatever he does, does it independently
B.آپ اس کو سمجھاتے ہیں کہ اسے جو کچھ بھی کرنا ہے وہ آزادانہ طور پر کرے

59 रेषेवर किती भिन्न बिंदू असतात?

How many distinct points lie on a line?

ایک لائن پر کتنی مختلف پوائنٹس ہوتے ہیں؟

A.अमर्याद
A.infinite
A.غیر متناہی

B.एक
B.one
B.ایک

C.दोन
C.two
C.دو

D.तीन
D.three
D.تین

Answer: A.अमर्याद
A.infinite
A.غیر متناہی

60 दोन संख्यांचा मसावी 16 आहे आणि त्यांचा लसावी 160 आहे. जर एक संख्या 32 असेल, तर दुसरी संख्या काय असेल?

The HCF of two numbers is 16 and their LCM is 160. If one of the numbers is 32, then the other number is?

دو نمبروں کے ایچ سی ایف 16 ہے اور ان کے ایل سی ایم 160 ہے۔ اگر میں سے ایک نمبر 32 ہے تو پھر دوسرا نمبر ہے؟

A.48
A.48
A.48

B.80
B.80
B.80

C.96
C.96
C.96

D.112
D.112
D.112

Answer: B.80
B.80
B.80

61 क्रिकेट बॅटचे 'विलो' कश्यापासून मिळते?

Where is the "Willow" of the cricket bat derived from?

کرکٹ بیٹ کے "ولو" کو کہاں سے حاصل کیا جاتا ہے؟

A.उष्णकटीबंधीय पतझडी अरण्य
A.Tropical Deciduous forests
A. ٹراپیکل ڈیسیڈئس جنگل

B.उच्च पर्जन्य अरण्य
B.Heavy Rain Forest
B. بھاری بارش جنگل

C.पतझडी अरण्य
C.Deciduous Forest
C. ڈیسیڈئس جنگل

D.पर्वतीय अरण्य
D.Mountain Forest
D. ماؤنٹین جنگل

Answer: D.पर्वतीय अरण्य
D.Mountain Forest
D. ماؤنٹین جنگل

62

सूचना: खालील प्रश्नातील चार पर्यायांपैकी, तीन पर्याय असे आहेत की प्रत्येकातील 3 शब्द एकमेकांशी (A), (B), (C), (D) आणि (E) अशा दिलेल्या 5 पर्यायांपैकी कोणत्याही एका दृष्टीने एकमेकांशी संबंधित आहेत. आणि संबंध दर्शविणारा 1 पर्याय आहे जो खालील आकृतींद्वारा दाखविलेला नाही. ह्या अटीची पूर्तता करणारा संबंध म्हणजे तुमचे उत्तर असेल.

DIRECTION: Out of the four alternatives in the following question, three alternatives are such that the three words in each are related among themselves in one of the five ways represented by (A), (B), (C), (D) and (E) below. And one of the alternatives represents a relationship which is not represented by any of the figures given below. The relationship that complies this condition is your answer.

ہدایت: مندرجہ ذیل سوال میں چار متبادل میں سے، تین متبادل ایسے ہیں کہ ہر ایک میں تین الفاظ آپس میں پانچ طریقوں (A)،(B)،(C)،(D)&(E) میں سے ایک میں متعلق ہیں جن کی نمائندی مندرجہ ذیل کے ذریعہ کی گئی ہے۔ اور ایک متبادل ایسے تعلق کی نمائندگی کرتا ہے جس کی نمائندگی بیچے دیے گئے کسی بھی خاکے کے ذریعہ نہیں کی جاتی ہے۔ اس شرط پر پورا اترنے والی شرط آپ کا جواب ہے

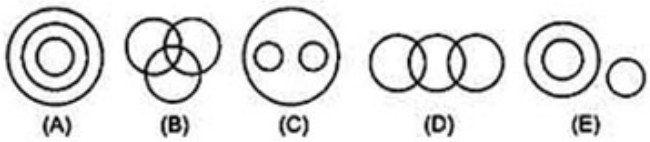

(a) Mineral, Iron, Copper / खनिज, लोह, तांबे/معدنیات، لوہا، تانبا

(b) Dean, Painter, Singer / प्रमुख, चित्रकार, गायक/مہتمم، پینٹر، گلوکار

(c) Seed, Leaf, Root / बीज, पान, मूळ/بیج، پتی، جڑ

(d) Piston, Engine, Wheel / पिस्टन, इंजिन, चाक/پسٹن، انجن، پہیہ

A. (A)

B. (B)

C. (C)

D. (D)

Answer: C. (C)

63 एक धन संख्या जिचे वर्गमूळ हे 100 पेक्षा कमी आहे, ती संख्या यांच्या दरम्यान असेल

The square root of a positive number less than 100 will be between these numbers

100 سے کم ایک مثبت عدد کا مربع روٹ ان اعداد کے درمیان ہوگا

A.0 आणि 1000
A.0 and 1000
A.0 اور 1000

B.0 आणि 10
B.0 and 10
B.0 اور 10

C.—10 आणि 10
C.—10 and 10
C.10- اور 10

D.—100 आणि 100
D.—100 and 100
D.100- اور 100

Answer: B.0 आणि 10
B.0 and 10
B.0 اور 10

64 सूचनाः दिलेल्या पर्यायांमधून ऍनालॉगस शब्द निवडा.

थर्मोमीटरचा संबंध तापमानासोबत आहे जसा ऱ्हायसीमीटरचा संबंध ...सोबत आहे.

DIRECTIONS: Choose the analogous word from the given alternatives.

Thermometer is to Temperature as Rhysimeter is to _____.

ہدایات: دیے گئے متبادل سے مطابق لفظ کا انتخاب کریں

تھرمومیٹر کا تعلق حرارت کے ساتھ ویسا ہی ہے جیسا کہ رھیسمیٹر کا -------- ک ساتھ .

A.ऱ्हिदमिक हालचाली
A.Rhythemic movements
A. ترتیب وار تحریک

B.वायूंची घनता
B.Density of gases
B. گسس کا گناپن

C.वाऱ्याचा वेग
C.Wind speed
C. ہوا کی رفتار

D.द्रवाची वेलॉसिटी
D.Velocity of liquid
D. پانی کی رفتار

Answer: D.द्रवाची वेलॉसिटी
D.Velocity of liquid
D. پانی کی رفتار

65 श्री रवी आणि प्रियांकाने त्यांचा वाढदिवस शुक्रवार, 4 फेब्रुवारी 2005 रोजी साजरा केला. त्याच वारी ते पुढचा वाढदिवस कधी साजरा करतील?

Mr. Ravi and Priyanka celebrated their anniversary on Friday, 4 February 2005. When would they celebrate their next anniversary on the same day?

جناب روی اور پرینکا نے اپنی سالگرہ جمعہ کو 4 فروری 2005 کو منائی، تو وہ اپنی سالگرہ اسی دن کب منائیں گے؟

A.2009
A.2009
A.2009

B.2011
B.2011
B.2011

C.2015
C.2015
C.2015

D.2010
D.2010
D.2010

Answer: B.2011
B.2011
B.2011

66 सूचना : खालील प्रत्येक प्रश्नात दोन विधाने I आणि II दिलेले आहेत. हे विधान एकतर स्वतंत्र कारण असू शकतात किंवा स्वतंत्र कारणांचे परिणाम असू शकतात. यांपैकी एक विधान इतर विधानाचा परिणाम असू शकतो. दोन्ही विधाने वाचा आणि खालीलपैकी कोणत्या उत्तराचा पर्याय या दोन्ही विधानांमधील संबंधांचे वर्णन करतो ते ठरवा.

विधान :
I. देशामधील समाज बलात्कारांची नोंद करण्यास हतोत्साहित करतो.
II. देशामध्ये दोषी असल्याचा आरोप करणे फार मोठी गोष्ट आहे.

DIRECTIONS: Below in each question are given two statements I and II. These statements may be either independent causes or may be effects of independent causes. One of these statements may be the effect of the other statement. Read both the statements and decide which of the following answer choice correctly depicts the relationship between these two statements.

Statements:
I. The society discourages reporting of rapes in a country.
II. Victim blaming is very high in a country.

ہدایات: نیچے ہر سوال میں دو بیانات I اور II آزاد وجوہات یا پھر آزاد وجوہات کے اثرات ہو سکتے ہیں۔ انہیں گئے ہیں۔ یہ بیانات یا تو
بیانات میں سے ایک بیان دوسرے کا اثر ہو سکتا ہے۔دونوں بیانات پڑھیں اور فیصلہ کریں کہ نیچے دیے گئے کس جواب کا انتخاب ان
دونوں بیانات کے در میان تعلق کو ٹھیک سے ظاہر کرتا ہے۔

بیانات:
I –ایک ملک میں سوسائٹی ریپ کو رپورٹ کرنے کی حوصلہ شکنی کرتا ہے۔
II ۔ ایک ملک میں مظلوم پر الزام لگانا انتہائی زیادہ ہے۔

A.विधान I कारण आहे आणि विधान II त्याचा परिणाम आहे;
A.Statement I is the cause and statement IIIs its effect;
A.بیان نمبر I وجہ ہے اور بیان نمبر II اس کا اثر ہے۔

B.विधान II कारण आहे आणि विधान I त्याचा परिणाम आहे;
B.Statement II is the cause and statement I is its effect;
B.بیان نمبر II وجہ ہے اور بیان نمبر I اس کا اثر ہے۔

C.विधान I आणि II दोन्ही स्वतंत्र कारणे आहेत;
C.Both the statements I and II are independent causes;
C.دونوں بیانات نمبر I اور نمبر II آزاد وجوہات ہیں۔

D.विधान I आणि II दोन्ही स्वतंत्र कारणांचे परिणाम आहेत;
D.Both the statements I and II are effects of independent causes;
D.دونوں بیانات نمبر I اور نمبر II آزاد وجوہات کے اثرات ہیں۔

Answer: B.विधान II कारण आहे आणि विधान I त्याचा परिणाम आहे;
B.Statement II is the cause and statement I is its effect;
B.بیان نمبر II وجہ ہے اور بیان نمبر I اس کا اثر ہے۔

67	खालीलपैकी शुद्ध वाक्य कोणते ?
	A.फुकटाचे दिले जर कोण नको म्हणेल ?
	B.फुकटाला दिले तर कोण नको म्हणेल ?
	C.फुकट दिले जर कोण नको पाहिजे म्हणेल ?
	D.फुकटाचे मिळाले तर कोण नको म्हणेल ?
Answer:	D.फुकटाचे मिळाले तर कोण नको म्हणेल ?

68	इमारतीचे विजेपासून संरक्षण करण्यासाठी कोण्ते उपकरण वापरतात? Which device is used to protect building from lightning? عمارت کو آسمانی بجلی سے بچانے کے لئے کس ڈیوائس کا استعمال کیا جاتا ہے؟
	A.क्रॉनोमीटर A.Chronometer A.کرونومیٹر
	B.एनेमोमीटर B.Anemometer B.انیمومیٹر
	C.विद्युत वाहक C.Lightning Conductor C.آسمانی بجلی کا کنڈکٹر
	D.पिरॅनोमीटर D.Pyranometer D.پائرانومیٹر
Answer:	C.विद्युत वाहक C.Lightning Conductor C.آسمانی بجلی کا کنڈکٹر

69 दिलेल्या शब्दापासून खालील शब्दांपैकी कोणता शब्द तयार केला जाऊ शकत नाही?
ARCHITECTURE

Which of the following word cannot be formed from the given word?
ARCHITECTURE

دیےگیے لفظ سے مندرجہ ذیل الفاظ میں سے کونسا نہیں بنایا جاسکتا ہے؟
‘ARCHITECTURE’

A.TACT
A.TACT
A.TACT

B.CHAT
B.CHAT
B.CHAT

C.TORCH
C.TORCH
C.TORCH

D.RICH
D.RICH
D.RICH

Answer: C.TORCH
C.TORCH
C.TORCH

70 क्रिया सुरू करण्यासाठी किंवा पूर्ण करण्यासाठी औदासीन्य आणि सामर्थ्यचा मार्ग म्हणजे –

Apathy and mability to start or complete a course of action

کارروائی کے آغاز کو شروع کرنے یا مکمل کرنے کے لئے بیکیکی اور مفاہمت

A.सरळसरळ प्रभाव
A.Flat effect
A.فلیٹ اثر

B.उदासिन
B.Depression
B.ڈپریشن

C.अव्होहशन
C.Avohtion
C.آاوشن

D.अलोग्रा
D.Alogra
D.الیوگرا

Answer: C.अव्होहशन
C.Avohtion
C.آاوشن

71 सूचना: अर्थपूर्ण परिच्छेद निर्माण करण्यासाठी, खाली दिलेली (P), (Q) (R), (S) आणि (T) ही पाच वाक्ये योग्य अनुक्रमाने पुनर्रचना करा; त्यांनतर खालील प्रश्नांची उत्तर द्या.

P. मुंगीने त्याला सांगितले कि, ती हिवाळ्याची तयारी करत आहे कारण तेव्हा अन्न दुर्मिळ होईल.
Q. लवकरच हिवाळा सुरु झाला आणि नाकतोड्याला जगण्यासाठी अन्न उपलब्ध नव्हते, तर मुंग्या आपल्या उबदार घरट्यात मक्याचा आनंद घेत होत्या.
R. आपल्या घरट्याकडे मक्याच्या जाड कणीस घेऊन जाणाऱ्या मुग्या पाहून, तशी कठोर मेहनत करण्यापेक्षा आपल्यासोबत मौजमजा करण्यासाठी नाकतोड्यानें मुंगीला बोलावले.
S. त्यावर हसून नाकतोडा म्हणाला सध्याचा वर्तमानकाळ चांगला असताना हिवाळ्याची चिंता कशाला हवी
T. तो एक आंनदी दिवस होता आणि नाकतोडा गात, नाचत आनंदाने बागडत होता.

पुनर्रचना केल्यानंतर खालीलपैकी कोणते वाक्य दुसरे असेल?

DIRECTION: Rearrange the following five sentences (P), (Q), (R), (S) and (T) in the proper sequence to form a meaningful paragraph; then answer the questions given below them.
P. The ant tells him that it is preparing for winter when food would be scarce.
Q. Winter soon begins, and the grasshopper has no food to survive, while the ants enjoy the corn in the warmth of their nest.
R. Upon seeing an ant carrying a heavy corn kernel to its nest, the grasshopper asks the ant to join him for some fun, instead of working hard like that.
S. The grasshopper laughs and says why care for winter when the present is good.
T. It was a pleasant day and the grasshopper was in a gay mood, singing and dancing around.

Which of the following should be the SECOND sentence after rearrangement?

ہدایات: ان پانچ جملوں (P)، (Q)، (R)، (S) اور (T) کو با معنی پیرا بنانے کے لئے دوبارہ ترتیب دیجئے، پھر نیچے دے گئے سوالوں کے جواب دیجئے

P. چھینٹی نے اسے کہا کہ وو سردی کے لئے تیاری کر رہی ہے جب کھانے کی کمی ہوگی.
Q. جلد ہی سردی شرو ہو گی، ٹیڈا کو جینے کے لئے کھانا نہیں تھا، جب کہ چھینٹی اناج کہ مزا اپنے گھونسے کی گرمی میں لے رہی تھی.
R. جب اسے دیکھا کہ چھینٹی ایک بڑا اناج کہ دانا لے جا رہی ہے، تیڈے نے اسے کہا کہ انکے ساتھ مزا کرے،سخت محنت کرنے سے اچھا ہے.
S. ٹیڈا حصّہ اور کہا سردی کی فکر کیوں کرنی جب حاضر وقت اچھا چل رہا ہے.
T. بہت اچھا دن تھا اور ٹیڈا بہت خوش تھا ،گاتا اور ناچ رہا تھا.

دوبارہ ترییب دینے کے بعد کون سا جملہ دوسرا ہونا چاہیے؟

A.R
A.R
A.R

B.T
B.T
B.T

C.P
C.P
C.P

D.Q
D.Q
D.Q

Answer: A.R
A.R
A.R

72 भारतात पहिली आगगाडी ..... आणि ठाण्याच्या मध्ये चालली.

In India, the first train ran between _____ and Thane.

بھارت میں پہلی ٹرین _____ اور تھانے کے درمیان چلی .

A.मुंबई
A.Bombay
A. بامبے

B.दिल्ली
B.Delhi
B. دہلی

C.भटींडा
C.Bathinda
C. بھٹنڈا

D.कोलकोता
D.Kolkata
D. کولکتہ

Answer: A.मुंबई
A.Bombay
A. بامبے

73 सूचना: खालील प्रश्नांमध्ये दिलेल्या पर्यायांमधून संबंधित अक्षर/शब्द/संख्या निवडा.

पोशाख : शिंपी :: ? : सुतार

DIRECTIONS: In the following question, select the related letter/word/number from the given alternatives.

Dress : Tailor :: ? : Carpenter

سمت: مندرجہ ذیل سوال میں، دیے گئے متبادل سے متعلقہ حرف/لفظ/نمبر منتخب کریں۔

لباس : درزی : ؟ : بڑھئی

A.लाकूड
A.Wood
A.لکڑی

B.फर्निचर
B.Furniture
B.فرنیچر

C.चामडे
C.Leather
C.چمڑا

D.कापड
D.Cloth
D.کپڑا

Answer: B.फर्निचर
B.Furniture
B.فرنیچر

74 खालील पैकी कोणते पूर्ण वर्ग नाही?

Which of the following is not a perfect square?

مندرجہ ذیل میں سے کون ایک درست مربع نہیں ہے؟

A.49
A.49
A.49

B.144
B.144
B.144

C.529
C.529
C.529

D.51
D.51
D.51

Answer: D.51
D.51
D.51

75 18 महिला एक काम 12 दिवसांत आणि 12 पुरूष तेच काम 9 दिवसांत पूर्ण करतात. तेच काम 8 पुरूष आणि 8 महिला किती दिवसांत पूर्ण करू शकतील?

18 women can complete a work in 12 days and 12 men can complete the same work in 9 days. In how many days will 8 men and 8 women complete that work?

18 عورتیں ایک کام کو 12 دن میں مکمل کرتی ہیں اور 12 آدمی اسی کام کو 9 دن میں مکمل کرتے ہیں۔ 8 آدمی اور 8 عورتیں اس کام کو کتنے دنوں میں مکمل کریں گے؟

A.9 दिवस
A.9 days
A.9دن

B.6 दिवस
B.6 days
B.6دن

C.12 दिवस
C.12 days
C.12دن

D.8 दिवस
D.8 days
D.8دن

Answer: A.9 दिवस
A.9 days
A.9دن

76 रु. 56 ला वस्तूची विक्री करून मिळणाऱ्या नफ्याची टक्केवारी ही ती जेव्हा रु. 42 ला विकली जाते त्याच्या तिप्पट आहे. वस्तूची खरेदी किंमत:

The percent profit made when an article is sold for Rs. 56 is thrice as when it is sold for Rs. 42. The cost price of the article is:

ایک شے جب 56 روپے میں فروخت کی جائے تو اس جکا نفع اس نفع سے تین گنا زیادہ ہوتا ہے جو 42 روپے میں فروخت کرنے پر حاصل ہوتا ہے۔اس شے کی لاگت قیمت ہے

A.रु. 28
A.Rs. 28
A.Rs. 28

B.रु. 49
B.Rs. 49
B.Rs. 49

C.रु. 25
C.Rs. 25
C.Rs. 25

D.रु. 35
D.Rs. 35
D.Rs. 35

Answer: D.रु. 35
D.Rs. 35
D.Rs. 35

77 प्रश्नासाठी सूचना: खालील मालिका पूर्ण करा..

AG, CI, EK, GM, IO, ____

DIRECTION: Complete the following series.

AG, CI, EK, GM, IO, ____

سوال کے لیے ہدایت:مندرجہ ذیل سیریز کو مکمل کریں۔

AG, CI, EK, GM, IO, ____

A.KQ
A.KQ
A.KQ

	B.HS B.HS B.HS
	C.RI C.RI C.RI
	D.PO D.PO D.PO
Answer:	A.KQ A.KQ A.KQ

78	$27^{2/3}$ चे मूल्य शोधा? Find the value of $27^{2/3}$. 272/3 کا .کا حل ہوگا
	A.5 A.5 A.5
	B.2 B.2 B.2
	C.9 C.9 C.9
	D.1 D.1 D.1
Answer:	C.9 C.9 C.9

79	‘ चल बनारसी पान खाऊ.’ या वाक्यातील विशेषण ओळखा.

	A.चल
	B.बनारसी
	C.पान
	D.खाऊ
Answer:	B.बनारसी

80	दृष्टीकोन बदलामध्ये हे बदल होऊ शकतात- In attitude change the change can be رویے کی تبدیلی میں تبدیلی ہو سکتی ہے:
	A.एकसमान आणि विसंगत A.Congruent and Incongruent A.موافق و غیر موافق
	B.एकदिशिक आणि बहुदिशादर्शक B.Unidirectional and Multidirectional B.یک سمتی اور کثیر سمتی
	C.सोपे आणि विकट C.Simple and Complex C.عام اور پیچیدہ
	D.यापैकी एकही नाही D.None of these D. ان میں سے کوئی نہیں
Answer:	A.एकसमान आणि विसंगत A.Congruent and Incongruent A.موافق و غیر موافق

81 सूचना: खालील माहिती काळजीपूर्वक वाचा आणि खालील प्रश्नांची उत्तरे द्या:
कंपनीचे सात प्रतिनिधि -सागर,नीलू, रीमा, श्वेता, गरिमा, पार्थ आणि मोहित तीन वेगवेगळ्या देशांमध्ये गेले, ते देश आहेत दक्षिण आफ्रिका, ऑस्ट्रेलिया आणि फ्रान्स. त्यांच्यापैकी प्रत्येकाने आठवड्याच्या वेगवेगळ्या दिवशी प्रवास केला (कोणत्याही दोन व्यक्तींनी एकाच दिवशी प्रवास केला नाही) सोमवार पासून सुरुवात करुन, रविवारी समाप्त केला. किमान दोन लोकांनी प्रत्येक देशात प्रवास केला आणि दक्षिण आफ्रिका हा एकच असा देश होता जिथे तीन लोक गेले.
सागर दक्षिण आफ्रिकेला सोमवारी गेला. पार्थ ऑस्ट्रेलियाला गेला पण तो ना मंगळवारी गेला ना शनिवारी गेला. मोहित रविवारी गेला पण तो फ्रान्सला गेला नाही. जी व्यक्ती ऑस्ट्रेलियाला गेली तिने मंगळवारी प्रवास केला आणि जी फ्रान्सला गेली तिने शनिवारी प्रवास केला. गरिमाने बुधवारी प्रवास केला. रिमा दक्षिण आफ्रिकेला गेली पण गुरुवारी गेली नाही. निलू फ्रान्सला गेली नाही.
जर प्रत्येकाची ट्रिप एका दिवसाने पुढे गेली, तर बुधवारी कोण प्रवास करेल?

DIRECTIONS: Study the following information carefully and answer the questions given below.
Seven representatives of a company — Sagar, Nilu, Reema, Shweta, Garima, Parth and Mohit travelled to three different countries i.e. South Africa, Australia and France. Each of them travelled on different days of the week (no two persons travelled on the same day), starting on Monday and ending on Sunday. Minimum two people travelled to each country and South Africa is the only country to which three people travelled.
Sagar travelled to South Africa on ‘Monday. Parth travelled to Australia but neither on Tuesday nor on Saturday. Mohit travelled on Sunday but not to France. The one who travelled to Australia travelled on Tuesday and the one who travelled to France travelled on Saturday. Garima travelled on Wednesday. Reema travelled to South Africa but not on Thursday. Nilu did not travel to France.
If everyone’s trip is postponed by one day, who will be travelling on Wednesday?

ہدایات: مندرجہ ذیل معلومات کو دھیان سے پڑھیں اور نیچے دیے گئے سوالوں کے جواب دیں۔
ایک کمپنی کے سات نمائندے – ساگر، نیلو، ریما، شویتا، گریما، پارتھ اور موہت نے تین مختلف ملکوں یعنی جنوبی افریقہ، آسٹریلیا اور فرانس کا سفر کیا۔ ان میں سے ہر ایک نے پیر سے شروع اور سنیچر کو ختم کرکے ہفتہ کے مختلف دنوں میں سفر کیا (کسی دو شخص نے ایک ہی دن سفر نہیں کیا)۔ کم سے کم دو افراد نے ہر ایک ملک کا سفر کیا اور جنوبی افریقہ واحد ملک ہے جس کا تین لوگوں نے سفر کیا۔
ساگر نے پیر کے دن جنوبی افریقہ کا سفر کیا۔ پارتھ نے آسٹریلیا کا سفر کیا لیکن نہ تو منگل کو اور نہ ہی سنیچر کے روز۔ موہت نے اتوار کو سفر کیا لیکن فرانس کا نہیں۔ جس نے آسٹریلیا کا سفر کیا اس نے منگل کے روز سفر کیا اور جس نے فرانس کا سفر کیا اس نے اس نے سنیچر کے دن سفر کیا۔ گریما نے بدھ کو سفر کیا۔ ریما نے جنوبی افریقہ کا سفر کیا لیکن جمعرات کو نہیں۔ نیلو نے فرانس کا سفر نہیں کیا۔
اگر ہر ایک کا سفر ایک دن کے لیے ملتوی ہو جاتا ہے، تو بدھ کو کون سفر کرے گا؟

A.पार्थ
A.Parth
A.پارتھ

B.रीमा
B.Reema
B.ریما

C.नीलू
C.Nilu
C.نیلو

D.गरिमा
D.Garima
D.گریما

Answer: C.नीलू
C.Nilu
C.نیلو

82

A, B, C, आणि D नावाच्या चार आकृत्या दिल्या आहेत, त्यापैकी प्रश्नचिन्हाची (?) जागा घेणारी योग्य आकृती शोधून काढा.

Choose an appropriate figure from the four numbered figures for the place of the questions mark (?).

4 اعداد و شمار والی تصاویر f یا جگہ کے سوالات کے نشان (؟) سے مناسب تصویرکا انتخاب کریں۔

Problem Figures
प्रश्न आकृत्या
مسئلہ کی تصاویر

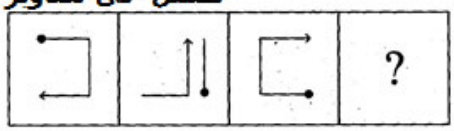

Answer Figure
उत्तरासाठी पर्यायी आकृत्या
جواب کی تصویر

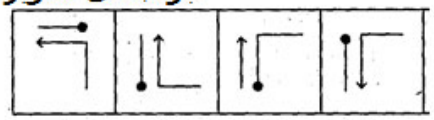

A. (A)

B. (B)

C. (C)

D. (D)

Answer: D. (D)

83

7 आणि 28 च्या मधील सरासरी प्रमाण किती:

Mean proportion between 7 and 28 is:

7 اور 28 کے درمیان درمیانہ تناسب ہے:

A.17.5
A.17.5
A.17.5

B.12
B.12
B.12

C.14
C.14
C.14

D.16
D.16
D.16

Answer: C.14
C.14
C.14

84

सूचना: खालील प्रश्नात, दिलेल्या पर्यायांमधून नातेसंबंध सांगणारी आकृती निवडा.

DIRECTIONS: In the question below, select the related figure from the given alternatives.

ہدایات: ذیل کے سوال میں، دئے گئے متبادلات میں سے متعلق تصویر منتخب کریں۔

Problem Figures:



(A) (B) (C) (D)

Answer Figures:



(1) (2) (3) (4)

A. 1

B. 2

C. 3

D. 4

Answer: A. 1

85 सूचना: खाली दिलेल्या प्रश्नात एक विधान आहे ज्याचे I आणि II असे दोन निष्कर्ष त्याखाली अंकित केलेले आहेत. या आधारे सर्वात योग्य पर्याय निवडा.

विधान:
जगात भारत हा सर्वात जुना लोकशाहीप्रधान देशांपैकी एक देश आहे.

निष्कर्ष:
I. लोकशाहीची सुरवात प्रथम भारतात झाली.
II. लोकशाहीची सुरवात करणारा भारत हा जगातील सर्वात प्रथम देश होता.

DIRECTIONS: The question below has a statement followed by two conclusions numbered I and II. Based on this choose the option that is most suitable.

Statement:
India is one of the oldest democracies in the world.

Conclusions:
I. Democratic practices started in India.
II. India was the first democratic country in the world.

ہدایات: نیچے دیے گئے سوال میں ایک بیان کے بعد دو نتائج I اور II دیے گئے ہیں۔ اس کی بنیاد پرانتہائی موزوں آپشن کا انتخاب کیجیے۔

بیان:
انڈیا دنیا میں سب سے قدیم جمہوریتوں میں سے ایک ہے.

نتیجے:
I. انڈیا میں جمہوری روایات کا آغاز ہوا .
II. انڈیا دنیا کا پہلا جمہوری ملک تھا.

A.केवळ निष्कर्ष क्रमांक I विधानास अनुसरून आहे
A.Only Conclusion I follows
A.صرف نتیجہ I لاگو ہو گا۔

B.केवळ निष्कर्ष क्रमांक II विधानास अनुसरून आहे
B.Only Conclusions II follows
B. صرف نتیجہ II لاگو ہو گا۔

C.निष्कर्ष क्रमांक I किंवा II अनुसरून आहे
C.Either I or II follows
C. I یا II میں سے ایک لاگو ہو گا۔

D.कोणताही निष्कर्ष अनुसरून नाही
D.Neither I nor II follow
D. I اور II میں سے کوئی بھی لاگو نہیں ہو گا۔

Answer: D.कोणताही निष्कर्ष अनुसरून नाही
D.Neither I nor II follow
D. I اور II میں سے کوئی بھی لاگو نہیں ہو گا۔

86 सूचना: खालील प्रश्नांमध्ये दिलेल्या पर्यायांमधून संबंधित अक्षर/शब्द/संख्या निवडा.

गरम : दहन ::

DIRECTIONS: In the following question, select the related letter/word/number from the given alternatives.

Hot : Burning ::

سمت: مندرجہ ذیل سوال میں، دیے گئے متبادل سے متعلقہ حرف/لفظ/نمبر منتخب کریں۔

گرم : جلتا ہوا ::

A.अग्नी : विध्वंस
A.Fire : Destruction
A.آگ : تباہی

B.चूक : वगळणे
B.Error : Omission
B.خرابی : بھول چوک

C.लाट : त्सुनामी
C.Wave : Tsunami
C.لہر : سونامی

D.डॉक्टर : रोग
D.Doctor : Disease
D.ڈاکٹر : بیماری

Answer: C.लाट : त्सुनामी
C.Wave : Tsunami
C.لہر : سونامی

87 जेव्हा आपण उन्हाळी सुट्ट्यात आपल्या पालकांना भेटायला जाता, आपल्या मुलांसाठी आपण त्यांच्याकडून कसल्या पालकत्वाची अपेक्षा करणार?

When you visit your parents in summer- break, what type of elderly behavior you will expect from them with regard to children?

جب آپ موسم بہار کی چھٹیوں میں اپنے والدین سے ملتے ہیں، تو بچوں کے سلسلے میں آپ کو کس قسم کی بزرگانہ رویے کی توقع ہوگی؟

A.ते भूतकाळातील घडलेल्या गोष्टी मोठ्या गर्वाने त्यांना सांगतील
A.They will tell them the past reminiscences with pride
A.وہ انہیں ماضی کی یادین فخر کے ساتھ بتائیں گے

B.ते त्यांना बोधकथा सांगतील
B.They will tell them moral stories
B.وہ انہیں اخلاقی کہانیاں سنائیں گے

C.ते आपल्या मुलांना मोठ करण्यासाठी केलेल्या संघर्षाबद्दल सांगतील
C.They will tell their struggles in rearing of their children
C.وہ اپنے بچوں کو اپنی محنت کے بارے میں بتائیں گے

D.ते वरील सांगितल्याप्रमाणे कुठल्याही गोष्टीबद्दल आंनदाने सांगणार.
D.They will tell anything as mentioned above with humor.
D.وہ مذکورہ بالا میں سے کسی بھی چیز کا مزاحا ذکر کرے گا.

Answer: D.ते वरील सांगितल्याप्रमाणे कुठल्याही गोष्टीबद्दल आंनदाने सांगणार.
D.They will tell anything as mentioned above with humor.
D.وہ مذکورہ بالا میں سے کسی بھی چیز کا مزاحا ذکر کرے گا.

88 सूचना: प्रत्येक प्रश्नाला एक प्रमुख विधानासोबत चार विधाने आहेत ज्यांच्याखाली A, B, C आणि D असे चार विधान आहेत. क्रमवार विधानांची जोडी निवडा ज्यामध्ये प्रथम विधान दुसऱ्या विधानाला सुचवते, आणि दोन्ही विधाने तर्किकदृष्ट्या प्रमुख विधानासोबत निगडित असेल.

चित्रपट एकतर रोमँटिक किंवा एक्शन आहे.
A. चित्रपट रोमँटिक आहे.
B. चित्रपट रोमँटिक नाही.
C. हा एक्शन चित्रपट आहे.
D. हा एक्शन चित्रपट नाही.

DIRECTIONS: Each question has a main statement followed by four statements labelled A, B, C and D. Choose the ordered pair of statements, where the first statement implies the second, and the two statements are logically consistent with the main statement.

The movie is either romantic or action .
A. The movie is romantic
B.The movie is not romantic
C.The movie is action
D.The movie is not action

ہدایت: ہر سوال میں ایک جملہ ہے جسکے بعد چار جملےاے، بی،سی اور ڈی کے نام سے دئے گئے ہیں اسمیں منسلک جوڑیوں کو چنئے۔ جہاں پہلا جملہ دوسرے جملہ کی اور اشارہ کر رہا ہے اور دو جملے منطقی مرکزی بیان کے مطابق ہیں

یہ فلم یا رومینٹک ہے یا ایکشن
A۔ فلم رومینٹک ہے
B۔ فلم رومینٹک نہیں ہے
C۔ فلم ایکشن ہے
D۔ فلم ایکشن نہیں ہے

A.AC
A.AC
A.AC

B.DA
B.DA
B.DA

C.CB
C.CB
C.CB

D.AB
D.AB
D.AB

Answer: B.DA
B.DA
B.DA

89

सूचना: दिलेल्या पर्यायांमधून श्रेणी पूर्ण करणारी योग्य आकृती निवडा.

DIRECTIONS: Complete the series by choosing right figure from the given choices.

ہدایات: دیئے گئے انتخابات میں سے صحیح تصویر کو منتخب کرکے سلسلہ مکمل کریں۔

Problem Figures

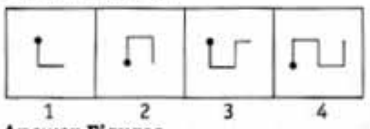

Answer Figures

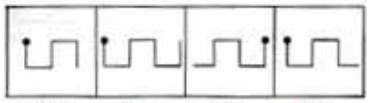

A. (A)

B. (B)

C. (C)

D. (D)

Answer: D. (D)

90

सूचना: दिलेल्या पर्यायांमधून वेगळे ते निवडा.

DIRECTIONS: Choose the odd one out from the given alternatives.

دیے گئے متبادل میں سے بے جوڑ کو چنیں۔

A.गहू
A.Wheat
A.گیہوں

B.हरभरा
B.Gram
B.چنا

C.भात
C.Rice
C.چاول

D.मध
D.Honey
D.شہد

Answer: D.मध
D.Honey
D.شہد

91 462 ही संख्या एका संख्येच्या 42% आहे. संख्या काय?

42% of a number is 462. What is the number?

کسی نمبر کا 42% ، 462 ہے ۔ نمبر کیا ہوگا۔

A.900
A.900
A.900

B.1000
B.1000
B.1000

C.1100
C.1100
C.1100

D.1200
D.1200
D.1200

Answer: C.1100
C.1100
C.1100

92 जर आपला मुलगा रात्रीउशिरा टीवीवर चित्रपट बघण्यास इच्छुक असतात, आपण त्याची समस्या कशी सोडवणार?

How would you solve the problem of your child, if he takes extra-interest in late night films on TV?

اگر آپ کا بچہ ٹی وی پر رات دیر کی فلموں میں اضافی دلچسپی لیتا ہے تو آپ اس کی مشکلات کو کیسے حل کریں گے؟

A.आपण मुलाला याची खात्री करून देऊ कि रात्री उशिरा झोपल्यामुळे सकाळी शाळेत लवकर जाऊ शकणार नाही
A.By persuading the child that he cannot reach to school early in the morning due to late night sleep
A.بچے کو اس پرقائل کرنے کے ذریعے کہ وہ دیر سے سونے کی وجہ سے صبح وقت پراسکول میں نہیں پہنچ سکے گا

B.त्याला समजवू कि रात्री चे चित्रपट त्याला काहीच उपयोगी नाही
B.By convincing him that late night films are not useful for young children
B.اس بات پر قائل کرنے کے ذریعے رات دیر کی فلمیں نوجوان بچوں کے لئے مفید نہیں ہیں

C.त्याला रागवा व परावृत्त करत रहा
C.By scolding him and discouraging for it
C.اس کو ڈرا کر اور اس کی حوصلہ شکنی کرتے ہوئے

D.त्याला ठरलेल्या वेळेच्या आधीच बळजबरी झोपण्यासाठी भाग पाडा
D.By going to sleep before schedule in order to force him to early sleep.
D.انہیں جلد سونے ہر مجبور کرنے کے لئے طے شدہ وقت سے قبل سونے کے لئے جانے کے ذریعہ

Answer: B.त्याला समजवू कि रात्री चे चित्रपट त्याला काहीच उपयोगी नाही
B.By convincing him that late night films are not useful for young children
B.اس بات پر قائل کرنے کے ذریعے رات دیر کی فلمیں نوجوان بچوں کے لئے مفید نہیں ہیں

93 जर ABCD चौकोनाची कर्णरेषा AC $5\sqrt{2}$ सेंमी आहे, तर त्याचे क्षेत्रफळ?
If diagonal AC of a square ABCD is $5\sqrt{2}$ cm, then what is its area?
اگر وتر AC کا ایک مربع ABCD $5\sqrt{2}$ سینٹی میٹر ہے تو اسکا رقبہ کیا ہوگا ؟

(A) 15 सेंमी^{2}
15 cm^2
15مربع سینٹی میٹر

(B) 13 सेंमी^{2}
13 cm^2
13مربع سینٹی میٹر

(C) 12 सेंमी^{2}
12 cm^2
12مربع سینٹی میٹر

(D) 25 सेंमी^{2}
25 cm^2
25مربع سینٹی میٹر

Answer: (D) 25 सेंमी^{2}
25 cm^2
25مربع سینٹی میٹر

94

खालील आकृतीमध्ये किती चौरस आहेत?

How many squares are there in the following figure?

مندرجہ ذیل تصویر میں کتنے مربع ہیں؟

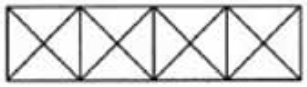

A. 4

B. 7

C. 8

D. 5

Answer: B. 7

95 जर काही विद्यार्थी आपल्या खोलीत प्रवेश करून आपल्यासोबत गैरव्यवहार करत असतील, अश्यावेळी आपण आपल्या भावनेंवर कसा नियंत्रण ठेवणार?

If some students enter your room and abuse you harshly, at that time how would You control your emotions?

اگر کچھ طلبا آپ کے کمرے میں داخل ہو جاتے ہیں اور آپ کی سخت تذلیل کرتے ہیں، تو اس وقت کیسے کریں گے
آپ اپنے جذبات کو کنٹرول کرتے ہیں؟

A.आपण त्याच्या भाषेतच त्याला उत्तर देऊ व त्याला मारहाण करण्याचा प्रयत्न करणार
A.You will react in similar tone and try to assault them physically
A.آپ اسی طرح کے ٹون میں ردعمل کریں گے اور جسمانی طور پر ان پر حملہ کرنے کی کوشش کریں گے

B.पहिले तर आपण त्याला शांत करण्याचा प्रयत्न करू, मग त्याला काय त्रास आहे विचारू
B.First you will try to pacify their emotions, then ask politely about their problems
B.سب سے پہلے آپ ان کے جذبات کو ٹھنڈا کرنے کی کوشش کریں گے، پھر ان کے مسائل کے بارے میں نرمی سے پوچھیں گے

C.आपल्याला वाटेल कि आपल्या सहकार्यांसमोर आपली इज्जत जाणार
C.You will feel ashamed among your colleagues
C.آپ خود کو اپنے ساتھیوں کے درمیان شرمندہ محسوس کریں گے

D.आपण प्रचार्याकडे शाळेतून काढून टाकण्यासाठी तक्रार नोंदवणार.
D.You will report the case to the principal with recommendation of rustication.
D.-آپ کو اس معاملے کو اخراج کی سفارش کے ساتھ پرنسپل کو پیش کریں گے

Answer: B.पहिले तर आपण त्याला शांत करण्याचा प्रयत्न करू, मग त्याला काय त्रास आहे विचारू
B.First you will try to pacify their emotions, then ask politely about their problems
B.سب سے پہلے آپ ان کے جذبات کو ٹھنڈا کرنے کی کوشش کریں گے، پھر ان کے مسائل کے بارے میں نرمی سے پوچھیں گے

96

सूचना: खालील प्रश्नात एक उघडलेला फासा दाखविला आहे. उत्तराच्या पर्यायांपैकी कोणता पर्याय 8 या चिन्हाच्या विरुद्ध बाजूला येईल?

DIRECTIONS: In the following question an unfolded dice is given. From the given alternatives which of the following will be opposite of 8?

ہدایات: مندرجہ ذیل سوال میں ایک کھلا ہوا ڈبہ دیا گیا ہے- دیئے گئے متبادلات میں مندرجہ ذیل میں سے کون 8 کے برعکس ہو گا؟



A. 3

B. 2

C. 4

D. 6

Answer: B. 2

97

सूचना: दिलेल्या पर्यायांमधून श्रेणी पूर्ण करणारी योग्य आकृती निवडा.

DIRECTIONS: Complete the series by choosing right figure from the given choices.

ہدایات: دیئے گئے انتخابات میں سے صحیح تصویر کو منتخب کرکے سلسلہ مکمل کریں-

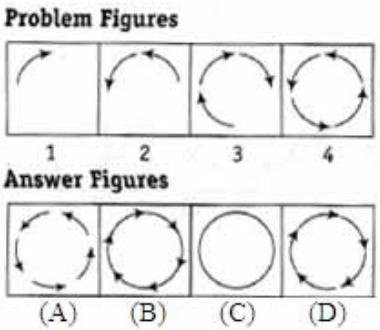

A. (A)

B. (B)

C. (C)

D. (D)

Answer: D. (D)

98 खालीलपैकी अशुद्ध शब्द कोणता ?

A.तणतणीत

B.तंतवाद्य

C.तंतोतंत

D.तत्पुरुष

Answer: B.तंतवाद्य

99 विधान:
विद्यार्थी वसतिगृहात विद्यार्थ्यांना पोर्नोग्राफी पाहताना पकडले गेले.

कृतीचा कोर्स:
I. त्यांच्या विरूद्ध कठोर प्रशासकीय कारवाई केली जावी.
II. त्यांच्या पालकांना माहिती असावी.

Statement:Students were caught watching pornography in the student hostel.
Course of actions:
I. Strict administrative action should be taken against them.
II. Their parents should be informed

بیان:
طلباء اسٹوڈنٹ ہاسٹل میں فحش فلمیں دیکھتے ہوئے پکڑے گئے۔

لائحہ عمل:
I۔ ان کے خلاف سخت انتظامی کاروائی کی جانی چاہیے۔
II۔ ان کے والدین کو آگاہ کیا جانا چاہیے۔

A.फक्त I अनुसरून आहे
A.Only I follows
A. صرف I لاگو ہو گا۔

B.फक्त II अनुसरण करते आहे
B.Only II follows
B. صرف II لاگو ہو گا۔

C.एकतर I किंवा II अनुसरून आहे
C.Either I or II follows
C. I یا II میں سے ایک لاگو ہو گا۔

D.I किंवा II दोन्हीपैकी काहीही अनुसरण करत नाही
D.Both I and II follow
D. I اور II میں سے کوئی بھی لاگو نہیں ہو گا۔

Answer: D.I किंवा II दोन्हीपैकी काहीही अनुसरण करत नाही
D.Both I and II follow
D. I اور II میں سے کوئی بھی لاگو نہیں ہو گا۔

100 DIRECTIONS: A sentence with an underlined word is given below. Find the word which is opposite in meaning to the underlined word from the given options.
If cancers are spotted early there's a high chance of survival.

A.Extinction

B.Living

C.Continuance

D.Advancement

Answer: A.Extinction

For More Info And Videos About TAIT-Exam Syllabus And Other Exam Visit My Channel
TAIT च्या 30 प्रश्नपत्रिका PDF
BADSHAHimp Available Request 9765226781
WWW.YouTube.com/BADSHAHimp
Subscribe My Channel

101 सूचना : खालील प्रत्येक प्रश्नात दोन विधाने I आणि II दिलेले आहेत. हे विधान एकतर स्वतंत्र कारण असू शकतात किंवा स्वतंत्र कारणांचे परिणाम असू शकतात. यांपैकी एक विधान इतर विधानाचा परिणाम असू शकतो. दोन्ही विधाने वाचा आणि खालीलपैकी कोणत्या उत्तराचा पर्याय या दोन्ही विधानांमधील संबंधांचे वर्णन करतो ते ठरवा.

विधान :
I. आंतरराष्ट्रीय स्तरावर ज्ञात ताजमहाल स्मारकाचे सुधारित प्रवेश शुल्क भारतीय आणि परदेशी लोकांसाठी अनुक्रमे ५० रुपये आणि ५०० रुपये करण्यात आले आहे.
II. ताजमहालला भेट देणाऱ्या पर्यटकांची संख्या खूप कमी झाली आहे.

DIRECTIONS: Below in each question are given two statements I and II. These statements may be either independent causes or may be effects of independent causes. One of these statements may be the effect of the other statement. Read both the statements and decide which of the following answer choice correctly depicts the relationship between these two statements.

Statements:
I. The revised entry fee for internationally known TajMahal monument has been increased to Rs.50 and Rs.500 for Indians and foreigners, respectively.
II. The number of tourists visiting TajMahal has decreased substantially.

ہدایات: نیچے ہر سوال میں دو بیانات I اور II آزاد وجوہات یا پھر آزاد وجوہات کے اثرات ہو سکتے ہیں۔ یہ بیانات یا تو آ ان دیے گئے ہیں۔ دونوں بیانات پڑھیں اور فیصلہ کریں کہ نیچے دیے گئے کس جواب کا انتخاب ان بیانات میں سے ایک بیان دوسرے کا اثر ہو سکتا ہے۔ دونوں بیانات کے در میان تعلق کو ٹھیک سے ظاہر کرتا ہے۔

بیانات:
I –500 اور 50 بین الاقوامی طور پر مشہور یادگار تاج محل کی نئی داخلہ فیس بڑھا کر انڈیین اور غیر ملکیوں کے لیے بالترتیب روپے کر دی گئی ہے۔
II ۔ تاج محل کا دورہ کرنے والے سیاحوں کی تعداد میں کافی کمی آئی ہے۔

A.I हा परिणाम आहे आणि II हे त्याचे तात्काळ आणि प्रमुख कारण आहे;
A.I is effect and II is its immediate and principal cause;
A. بیان نمبر I اثر ہے اور بیان نمبر II اس کی فوری اور بنیادی وجہ ہے۔

B.I हे तात्काळ आणि प्रमुख कारण आहे आणि II हा त्याचा परिणाम आहे;
B.I is the immediate and principal cause and II its effect;
B. بیان نمبر I فوری اور بنیادی وجہ ہے اور بیان نمبر II اس کا اثر ہے۔

C.I हा परिणाम आहे परंतु II हे त्याचे तात्काळ आणि प्रमुख कारण नाही;
C.I is an effect but II is not its immediate and principal cause;
C. بیان نمبر I اثر ہے لیکن بیان نمبر II اس کی فوری اور بنیادی وجہ نہیں ہے۔

D.II हा परिणाम आहे परंतु I हे त्याचे तात्काळ आणि प्रमुख कारण नाही;
D.II is an effect but I is not its immediate and principal cause;
D. بیان نمبر II اثر ہے لیکن بیان نمبر I اس کی فوری اور بنیادی وجہ نہیں ہے۔

For More Info And Videos About TAIT-Exam Syllabus And Other Exam Visit My Channel
TAIT च्या 30 प्रश्नपत्रिका PDF
BADSHAHimp Available Request 9765226781
WWW.YouTube.com/BADSHAHimp
Subscribe My Channel

Answer: B.I हे तात्काळ आणि प्रमुख कारण आहे आणि II हा त्याचा परिणाम आहे;
B.I is the immediate and principal cause and II its effect;
B. بیان نمبر I فوری اور بنیادی وجہ ہے اور بیان نمبر II اس کا اثر ہے۔

102 सूचना: प्रत्येक प्रश्नाला एक प्रमुख विधानासोबत चार विधाने आहेत ज्यांच्याखाली A, B, C आणि D असे चार विधान आहेत. क्रमवार विधानांची जोडी निवडा ज्यामध्ये प्रथम विधान दुसऱ्या विधानाला सुचवते, आणि दोन्ही विधाने तर्किकदृष्ट्या प्रमुख विधानासोबत निगडित असेल.

उत्पादक एकतर श्रीमंत किंवा गरीब आहे.
A. निर्माता श्रीमंत आहे.
B. निर्माता श्रीमंत नाही.
C. निर्माता गरीब आहे.
D. निर्माता गरीब नाही.

DIRECTIONS: Each question has a main statement followed by four statements labelled A, B, C and D. Choose the ordered pair of statements, where the first statement implies the second, and the two statements are logically consistent with the main statement.

The producer is either wealthy or poor .
A. The producer is wealthy
B . The producer is not wealthy
C. The producer is poor
D. The producer is not poor

ہدایت: ہر سوال میں ایک جملہ ہے جسکے بعد چار جملےاے، بی،سی اور ڈی کے نام سے دئے گئے ہیں اسمیں منسلک جوڑیوں کو چنئے۔ جہاں پہلا جملہ دوسرے جملہ کی اور اشارہ کر رہا ہے اور دو جملے منطقی مرکزی بیان کے مطابق ہیں

پروڈیوسر یا امیرہے یا غریب
A۔ پروڈیوسر امیر ہے
B۔ پروڈیوسر امیر نہیں ہے
C۔ پروڈیوسر غریب ہے
D۔ پروڈیوسر غریب نہیں ہے

A.BD
A.BD
A.BD

B.DA
B.DA
B.DA

C.CB
C.CB
C.CB

For More Info And Videos About TAIT-Exam Syllabus And Other Exam Visit My Channel
TAIT च्या 30 प्रश्नपत्रिका PDF
BADSHAHimp Available Request 9765226781
WWW.YouTube.com/BADSHAHimp
Subscribe My Channel

D.AB
D.AB
D.AB

Answer: B.DA
B.DA
B.DA

103 डोंबाऱ्यांच्या भोवती गोळा झालेल्या लोकांना म्हणतात

A collection of people around a road side performer will be termed as

روڈ کے نکڑ پر تماشہ دکھانے والے کے گرد کھڑی لوگوں کی جماعت کو _____کہتے ہیں۔

A.गर्दी
A.Crowd
A.کراؤڈ) ازدحام)

B.जमाव
B.Mob
B.بھیڑ

C.झुंड
C.Herd
C.جمگھٹا

D.श्रोते
D.Audience
D.سامعین ،سامعات

Answer: A.गर्दी
A.Crowd
A.کراؤڈ) ازدحام)

For More Info And Videos About TAIT-Exam Syllabus And Other Exam Visit My Channel
TAIT च्या 30 प्रश्नपत्रिका PDF
BADSHAHimp Available Request 9765226781
WWW.YouTube.com/BADSHAHimp
Subscribe My Channel

104 निर्देश: खालील प्रश्न दिलेल्या शब्दांवर आधारित आहेत.

light/ ride/ when/ price

जर सर्व शब्दांची शब्दकोशानुसार मांडणी केली तर कोणता शब्द चौथ्या क्रमांकावर येईल?

DIRECTIONS: Each of the following questions is based on the following given words.

light/ ride/ when/ price

If all the words are arranged according to Dictionary then which words will come fourth?

ہدایت جیل کے سوال دے ہے لفجونپر مشتمل ہیں

light/ ride/ when/ price

لفجونکو لغت کے جیسا لگایا جائے تو چٹھیا لفج کونسا ایگا

A.Light
A.Light
A.Light

B.Ride
B.Ride
B.Ride

C.When
C.When
C.When

D.Price
D.Price
D.Price

Answer: C.When
C.When
C.When

105 कोणती योग्य जोडी नाही?

Which is not a correct pair?

ان میں سے کونسی ایک صحیح جوڑی نہیں ہے؟

For More Info And Videos About TAIT-Exam Syllabus And Other Exam Visit My Channel
TAIT च्या 30 प्रश्नपत्रिका PDF
BADSHAHimp Available Request 9765226781
WWW.YouTube.com/BADSHAHimp
Subscribe My Channel

A.शुक्र - सकाळची तारा
A.Venus- morning star
A.وینس-صبح کا تارہ

B.मंगळ- लाल ग्रह
B.Mars -Red planet
B.مارس-ریڈ پلانیٹ (لال سیارہ)

C.बुटका ग्रह - सेरेस
C.Dwarf planet- Ceres
C.ڈوارف پلانیٹ-سیریس

D.धूमकेतू- ओरियन
D.Comet- Orion
D.کومیٹ-اورین

Answer:

D.धूमकेतू- ओरियन
D.Comet- Orion
D.کومیٹ-اورین

106

वनीकरण ही कश्याची प्रक्रिया आहे -

Afforestation is the process of-

افورسٹیشن عمل ہے

A.जंगलांची साफसफाईची
A.Cleaning forests
A. جنگلات کی صفائی کا

B.वृक्षारोपण
B.Plantation
B. پیڑوں کا لگانا

C.जंगल कापणे
C.Cutting of forest
C. جنگل کی کٹائی

D.वन संसाधने एकत्रित करणे
D.Collecting forest resources
D. جنگلات کے وسائل کو جمع کرنا

Answer:

B.वृक्षारोपण
B.Plantation
B. پیڑوں کا لگانا

For More Info And Videos About TAIT-Exam Syllabus And Other Exam Visit My Channel
TAIT च्या 30 प्रश्नपत्रिका PDF
BADSHAHimp Available Request 9765226781
WWW.YouTube.com/BADSHAHimp
Subscribe My Channel

107 सूचना: खालील माहिती काळजीपूर्वक वाचा आणि खालील प्रश्नांची उत्तरे द्या:
कंपनीचे सात प्रतिनिधि -सागर,नीलू, रीमा, श्वेता, गरिमा, पार्थ आणि मोहित तीन वेगवेगळ्या देशांमध्ये गेले, ते देश आहेत दक्षिण आफ्रिका, ऑस्ट्रेलिया आणि फ्रान्स. त्यांच्यापैकी प्रत्येकाने आठवड्याच्या वेगवेगळ्या दिवशी प्रवास केला (कोणत्याही दोन व्यक्तींनी एकाच दिवशी प्रवास केला नाही) सोमवार पासून सुरुवात करुन, रविवारी समाप्त केला. किमान दोन लोकांनी प्रत्येक देशात प्रवास केला आणि दक्षिण आफ्रिका हा एकच असा देश होता जिथे तीन लोक गेले.
सागर दक्षिण आफ्रिकेला सोमवारी गेला. पार्थ ऑस्ट्रेलियाला गेला पण तो ना मंगळवारी गेला ना शनिवारी गेला. मोहित रविवारी गेला पण तो फ्रान्सला गेला नाही. जी व्यक्ती ऑस्ट्रेलियाला गेली तिने मंगळवारी प्रवास केला आणि जी फ्रान्सला गेली तिने शनिवारी प्रवास केला. गरिमाने बुधवारी प्रवास केला. रिमा दक्षिण आफ्रिकेला गेली पण गुरुवारी गेली नाही. निलू फ्रान्सला गेली नाही.
खालीलपैकी कोणते दिलेल्या माहितीनुसार सत्य असेल?

DIRECTIONS: Study the following information carefully and answer the questions given below.
Seven representatives of a company — Sagar, Nilu, Reema, Shweta, Garima, Parth and Mohit travelled to three different countries i.e. South Africa, Australia and France. Each of them travelled on different days of the week (no two persons travelled on the same day), starting on Monday and ending on Sunday. Minimum two people travelled to each country and South Africa is the only country to which three people travelled.
Sagar travelled to South Africa on ‘Monday. Parth travelled to Australia but neither on Tuesday nor on Saturday. Mohit travelled on Sunday but not to France. The one who travelled to Australia travelled on Tuesday and the one who travelled to France travelled on Saturday. Garima travelled on Wednesday. Reema travelled to South Africa but not on Thursday. Nilu did not travel to France.
Which one of the following combinations is true according to the given information?

ہدایات: مندرجہ ذیل معلومات کو دھیان سے پڑھیں اور نیچے دیے گئے سوالوں کے جواب دیں۔
ایک کمپنی کے سات نمائندے – ساگر، نیلو، ریما، شویتا، گریما، پارتھ اور موہت نے تین مختلف ملکوں یعنی جنوبی افریقہ، آسٹریلیا اور فرانس کا سفر کیا۔ ان میں سے ہر ایک نے پیر سے شروع اور سنیچر کو ختم کرکے ہفتہ کے مختلف دنوں میں سفر کیا (کسی دو شخص نے ایک ہی دن سفر نہیں کیا)۔ کم سے کم دو افراد نے ہر ایک ملک کا سفر کیا اور جنوبی افریقہ واحد ملک ہے جس کا تین لوگوں نے سفر کیا۔
ساگر نے پیر کے دن جنوبی افریقہ کا سفر کیا۔ پارتھ نے آسٹریلیا کا سفر کیا لیکن نہ تو منگل کو اور نہ ہی سنیچر کے روز۔ موہت نے اتوار کو سفر کیا لیکن فرانس کا نہیں۔ جس نے آسٹریلیا کا سفر کیا اس نے منگل کے روز سفر کیا اور جس نے فرانس کا سفر کیا اس نے اس نے سنیچر کے دن سفر کیا۔ گریما نے بدھ کو سفر کیا۔ ریما نے جنوبی افریقہ کا سفر کیا لیکن جمعرات کو نہیں۔ نیلو نے فرانس کا سفر نہیں کیا۔
دی گئی معلومات کے مطابق مندرجہ ذیل مجموعوں میں سے کون درست ہے؟

A.पार्थ- गुरुवार - दक्षिण आफ्रिका
A.Parth- Thursday - South Africa
A.پارتھ- جمعرات – جنوبی افریقہ

B.श्वेता - बुधवार - फ्रान्स
B.Shweta - Wednesday - France
B.شویتا - بدھ - فرانس

C.मोहित - सोमवार - दक्षिण आफ्रिका
C.Mohit - Monday - South Africa
C.موہت - پیر – جنوبی افریقہ

D.कोणतेही सत्य नाही.
D.None is true
D.کوئی درست نہیں ہے

For More Info And Videos About TAIT-Exam Syllabus And Other Exam Visit My Channel
TAIT च्या 30 प्रश्नपत्रिका PDF
BADSHAHimp Available Request 9765226781
WWW.YouTube.com/BADSHAHimp
Subscribe My Channel

Answer:	D.कोणतेही सत्य नाही. D.None is true D.کوئی درست نہیں ہے

108	Out of the four alternatives, choose the one which can be substituted for the given words/sentence. A person who sacrifices something of great value and especially life itself for the sake of principle
	A.Martyr
	B.Glutton
	C.Obese
	D.Mercenary
Answer:	A.Martyr

109	कामाख्या मंदिर कुठे आहे The Kamakhya Temple is at – کامخیا مندر ہے۔
	A.दिब्रुगढ A.Dibrugarh A.ڈبروگڑھ میں
	B.गुवाहाटी B.Guwahati B.گواہاٹی میں
	C.भुवनेश्वर C.Bhubaneshwar C.بھوبنیشور میں
	D.कोलकाता D.Kolkata D.کولکاتا میں
Answer:	B.गुवाहाटी B.Guwahati B.گواہاٹی میں

For More Info And Videos About TAIT-Exam Syllabus And Other Exam Visit My Channel
TAIT च्या 30 प्रश्नपत्रिका PDF
BADSHAHimp Available Request 9765226781
YouTube WWW.YouTube.com/BADSHAHimp
Subscribe My Channel

110	6 ते 7 वाजण्यादरम्यान कोणत्या वेळी मिनिट आणि तास काटा परस्परांशी तंतोतंत जुळेल? At what time between 6 to 7 O’ clock minute and hour hand will coincide? 6 بجے سے 7 بجے کے درمیان کس وقت منٹ اور گھنٹہ کی سوئیاں آپس میں ملیں گی؟
	(A) $6:38\frac{2}{11}$
	(B) $6:43\frac{7}{11}$
	(C) $6:32\frac{8}{11}$
	(D) $6:5\frac{5}{11}$
Answer:	(C) $6:32\frac{8}{11}$

111	5/11 × 66 = ? 5/11 × 66 = ? 5/11 × 66 = ?
	A.30 A.30 A.30
	B.28 B.28 B.28
	C.36 C.36 C.36
	D.24 D.24 D.24

Answer:	A.30 A.30 A.30

112	$x^2–9x+20=0$ या वर्गसमीकरणाची मुळे आहेत: The roots of the quadratic equation $x^2–9x+20=0$ are: $x^2–9x+20=0$ مربع مساوات کے روٹ ہیں:
	A.3, 2 A.3, 2 A.3, 2
	B.6, 3 B.6, 3 B.6, 3
	C.5, 4 C.5, 4 C.5, 4
	D.2, 10 D.2, 10 D.2, 10

Answer:	C.5, 4 C.5, 4 C.5, 4

113	खालीलपैकी सर्वांत मोठा अपूर्णांक शोधा Find the largest of the following fractions مندرجہ ذیل کسور میں سے سب سے بڑی کسر تلاش کریں
	A.895/428 A.895/428 A.895/428
	B.23/12 B.23/12 B.23/12

C.88/46
C.88/46
C.88/46

D.313/150
D.313/150
D.313/150

Answer: A.895/428
A.895/428
A.895/428

114 खालीलपैकी कोणते पाणी वनस्पतीद्वारे वास्तविकपणे शोषले जाते?

Which of the following water is actually absorbed by the plants?

مندرجہ ذیل میں سے کون سا پانی پودوں کے ذریعہ جذب کیا جاتا ہے؟

A.गुरुत्वाकर्षण पाणी
A.Gravitational water
A. گریویٹیشنل پانی

B.सुक्ष्मवाहणारे पाणी
B.Capillary water
B. کیپیلری پانی

C.जलरोधक पाणी
C.Hygroscopic water
C. ہائڈرواسکوپک پانی

D.वरीलपैकी सर्व
D.All the above.
D. مندرجہ بالا تمام

Answer: B.सुक्ष्मवाहणारे पाणी
B.Capillary water
B. کیپیلری پانی

115 Out of the given options, choose the one which is the correct active voice of the sentence given below.
He was being taken to the cell by the police.

A.The police has been taking him to the cell.

B.The police had took him to the cell.

C.The police have took him to the cell.

D.The police were taking him to the cell.

Answer: D.The police were taking him to the cell.

116 सूचना: खालील प्रश्नांमध्ये दिलेल्या पर्यायांमधून संबंधित अक्षर/शब्द/संख्या निवडा.

दिलेला संच (6, 18, 54)

DIRECTIONS: In the following question, select the related letter/word/number from the given alternatives.

Given set: (6, 18, 54)

سمت: مندرجہ ذیل سوال میں، دیے گئے متبادل سے متعلقہ حرف/لفظ/نمبر منتخب کریں۔

(دیا گیا سیٹ: (6, 18, 54

A.(6, 13, 27)
A.(6, 13, 27)
A.(6, 13, 27)

B.(10, 16, 28)
B.(10, 16, 28)
B.(10, 16, 28)

C.(5, 15, 45)
C.(5, 15, 45)
C.(5, 15, 45)

D.(13, 19, 22)
D.(13, 19, 22)
D.(13, 19, 22)

Answer: C.(5, 15, 45)
C.(5, 15, 45)
C.(5, 15, 45)

117 ‘लक्षणीय’ या शब्दाचा समानार्थी शब्द कोणता ?

A.अलक्षणीय

B.दर्शनीय

C.कुरूप

D.साधारण

Answer: B.दर्शनीय

118 भारताचे शिपिंग मंत्री कोण आहेत?

Who is the Minister of Shipping in India?

بھارت کا شپنگ وزیر ہے

A.रामविलास पासवान
A.Ramvilas Paswan
A.رام ولاس پاسوان

B.डी.व्ही.एस. गौडा
B.D.V.S. Gowda
B.ڈی اوایس گوڑا

C.अनंत कुमार
C.Ananth Kumar
C.اننتھ کمار

D.एन. जे. गडकरी
D.N.J. Gadkari
D.این جے گڈکری

Answer: D.एन. जे. गडकरी
D.N.J. Gadkari
D.این جے گڈکری

119 पीव्हीसी याच्या पॉलिमरायझेशनद्वारे प्राप्त केले जाते —

PVC is obtained by the polymerization of—

پی وی سی _____ کی کثیر ترکیبی مرکب کے عمل سے حاصل ہوتا ہے۔

A.प्रोपेन
A.Propane
A.پروپین

B.व्हिनाइल क्लोराईड
B.Vinyl chloride
B.وینائل کلورائڈ

C.स्टायरेन
C.Styrene
C.اسٹائرین

D.एसिटिलीन
D.Acetylene
D.اسیٹائلین

Answer: B.व्हिनाइल क्लोराईड
B.Vinyl chloride
B.وینائل کلورائڈ

120 सूचना: दिलेल्या पर्यायांमधून वेगळे ते निवडा.

DIRECTIONS: Choose the odd one out from the given alternatives.

دیے گئے متبادل میں سے بے جوڑ کو چنیں۔

A.2158
A.2158
A.2158

B.2106
B.2106
B.2106

C.1348
C.1348
C.1348

D.1236
D.1236
D.1236

Answer: B.2106
B.2106
B.2106

121 सूचना: खालील प्रश्नांमध्ये दिलेल्या पर्यायांमधून संबंधित अक्षर समूह निवडा.

UOGP : UOJS:: UNAM : ?

DIRECTIONS: In the following question, select the related group of letters from the given alternatives.

UOGP : UOJS:: UNAM : ?

سمت: مندرجہ ذیل سوال میں، دیے گئے متبادل میں سے حروف کا متعلقہ گروپ منتخب کریں۔

UOGP : UOJS:: UNAM : ?

A.UDEX
A.UDEX
A.UDEX

B.UNDP
B.UNDP
B.UNDP

C.URQR
C.URQR
C.URQR

D.URSV
D.URSV
D.URSV

Answer: B.UNDP
B.UNDP
B.UNDP

122 'शीण' या शब्दाचा विरुद्धार्थी शब्द कोणता ?

A.उत्साह

B.ग्लानी

C.थकवा

D.कमजोरी

Answer: A.उत्साह

123 एका घनाला रंगवून किमान शक्य संख्येचे काप करून 80 लहान पण एकसारख्या तुकड्यांमध्ये कापले गेले आहे. घन कापण्यासाठी आवश्यक असलेल्या कापांची किमान संख्या काय आहे ?

A cube is painted and cut into 80 smaller but identical pieces by making the minimum possible number of cuts. What is the minimum number of cuts required to cut a cube?

ایک کیوب کو ایک جیسے 80 ٹکڑوں میں رنگ دے کر کاٹا گیا ہے۔ کم سے کم ممکن کٹ لگاتے ہوئے, کیوب کو کاٹنے کے لئے کم سے کم کتنے کاٹ کی ضرورت پڑے گی؟

A.12
A.12
A.12

B.8
B.8
B.8

C.6
C.6
C.6

D.10
D.10
D.10

Answer: D.10
D.10
D.10

124 अचूक गुणकारी असणारे -

A.रामबाण

B.ब्रम्हास्त्र

C.सुदर्शन

D.गुणवंत

Answer: A.रामबाण

125 _____ आणि वाळवी कॉलनीमध्ये राहाण्यास प्राधान्य देतात.

_____ and termites prefer to live in colonies.

_____اور دیمک کالونیوں میں رہنے کو ترجیح دیتے ہیں.

A.डुक्करं
A.Pigs
A. سور

B.उंदरं
B.Rats
B. چوہے

C.ससे
C.Rabbits
C. خرگوش

D.मुंग्या
D.Ants
D. چینٹی

Answer: D.मुंग्या
D.Ants
D. چینٹی

126 मानसिक वयासाठी ____ ही कमाल मर्यादा आहे

_____ is the maximum limit for mental age

_____ دماغی عمر کی زیادہ سے زیادہ کی حد ہے

A.16 वर्षे
A.16 years
A.16 سال

B.20 वर्षे
B.20 years
B.20 سال

C.45 वर्षे
C.45 years
C.45 سال

D.18 वर्षे
D.18 years
D.18 سال

Answer:

B.20 वर्षे
B.20 years
B.20 سال

127

सरकार यासाठी कर लादते:

Government imposes taxes to:

حکومت ٹیکس عائد کرتی ہے۔

A.कमकुवत विभागांची उन्नती करण्यासाठी
A.Uplift weaker sections
A. کمزور طبقوں کی بہبود کے لئے

B.राज्य यंत्रणा चालवण्यासाठी
B.Run machinery of state
B. ریاست کی مشینری کو چلانے کے لئے

C.श्रीमंतांमध्ये संपत्तीचा संचय तपासण्यासाठी
C.Check accumulation of wealth among rich
C. امیروں کے درمیان دولت کی جمع کو چیک کرنے کے لئے

D.वरीलपैकी सर्व
D.All of above
D. مندرجہ بالا میں سے سب

Answer:

D.वरीलपैकी सर्व
D.All of above
D. مندرجہ بالا میں سے سب

128

स्कॅनर स्कॅन करतो .....

A scanner scans ..... .

ایک اسکینر ------ کو اسکین کرتا ہے۔

A.छायाचित्र
A.Pictures
A.تصاویر

B.मजकुर
B.Text
B.تحریر

C.छायाचित्र आणि मजकुर दोन्हीही
C.Both picture and text
C.تصاویر اور تحریر دونوں

D.छायचित्र ही नाही आणि मजकुरही नाही
D.Neither picture nor text
D.نہ تو تصویر اور نا ہی تحریر

Answer:

C.छायाचित्र आणि मजकुर दोन्हीही
C.Both picture and text
C.تصاویر اور تحریر دونوں

129 कोणता लोखंडाचा शुद्ध व्यावसायिक प्रकार आहे?

Which of the purest commercial form of Iron?

ان میں سے کون لوہا کے سب سے خالص پیشہ وارانہ شکل ہے؟

A.बिडाचे लोखंड
A.Pig Irons
A.پگ آئرن

B.स्टेनलेस स्टील
B.Stainless Steel
B.اسٹیل

C.स्टील
C.Steel
C.اسٹین لیس اسٹیل

D.घडीव लोखंड
D.Wrought Iron
D.روٹ آئرن

Answer:

D.घडीव लोखंड
D.Wrought Iron
D.روٹ آئرن

130

सरळ रूप द्या:
64433 + 33333 – 42325 – 28246 = ?

Simplify:
64433 + 33333 – 42325 – 28246 = ?

آسان بنائیں:
64433+33333 – 42325 – 28246 = ?

A.27195
A.27195
A.27195

B.28295
B.28295
B.28295

C.28190
C.28190
C.28190

D.27005
D.27005
D.27005

Answer:

A.27195
A.27195
A.27195

131

P हा Q च्या ईशान्येला 45 मी. वर आणि R हा Q च्या वायव्येला 45 मी. वर असल्यास, P पासून R कोणत्या दिशेस आहे?

If P is 45m northeast of Q and R is 45m northwest of Q ,then R is in which direction with respect to P ?

اگر P، Q سے45 میٹر کے شمال مشرق میں ہے اور R، Q سے45 میٹر کے شمال مغرب میں ہے تو R کس سمت میں P کے مقابلے ہوگا؟

A.दक्षिण
A.South
A.جنوب

B.पूर्व
B.East
B.مشرق

C.उत्तर
C.North
C.شمال

D.पश्चिम
D.West
D.مغرب

Answer: D.पश्चिम
D.West
D.مغرب

132 ____लोकांचा सत्याशी संबंध तुटतो

____ people lose touch with reality

_____ لوگ جن کا حقیقت سے واسطہ ختم ہوجاتا ہے

A.चेतापदशी
A.Neurotic
A.خلل اعصابی کے مریض

B.मनोविकारग्रस्त
B.Psychotic
B.نفسیاتی مریض

C.वेड
C.Maniac
C.خبطی

D.B ते C
D.B to C
D.B اورC

Answer: B.मनोविकारग्रस्त
B.Psychotic
B.نفسیاتی مریض

133 84864 खालीलपैकी कोणासोबत विभाज्य आहे?

84864 is divisible by which of the following?

84864 ؟مندرجہ ذیل میں کس سے قابل تقسیم ہے

A.11
A.11
A.11

	B.8 B.8 B.8
	C.9 C.9 C.9
	D.7 D.7 D.7
Answer:	B.8 B.8 B.8

134	‘ स्वल्प ’ या शब्दाची संधी सोडवा.
	A.स + अल्प
	B.सा + अल्प
	C.सी + अल्प
	D.सु + अल्प
Answer:	D.सु + अल्प

135	Out of the given four words only one is not spelt correctly. Find the word that is not correctly spelt.
	A.Dissapear
	B.Definite
	C.Dilemma
	D.Disaster
Answer:	A.Dissapear

136 आपल्या मुलांच्या तुलनेत, आपण आपल्या विद्यार्थ्यांसोबत कसे वागणार?

How would you like to behave with your students, in comparison to your children?

آپ اپنے بچوں کے مقابلے میں، اپنے طالب علموں کے ساتھ کس طرح سلوک کرنا پسند کریں گے؟

A.अगदी आपल्या मुलांप्रमाणे
A.Just like own children
A.بالکل اپنے بچوں کی طرح

B.सगळ्या विद्यार्थ्यांना समान वागणूक देणे शक्य नाही
B.Equal treatment is not possible to all the students
B.تمام طالب علموں کے ساتھ برابر رویہ ممکن نہیں ہے

C.दडपणशाहीत ठेवणार
C.Repressed treatment
C.پریشان کن علاج

D.त्यांना मदतीचा हात देणे अधिक चांगले
D.It is better to lend them a free hand.
D.یہ بہتر ہے کہ ان کو ایک آزادی دو۔

Answer: A.अगदी आपल्या मुलांप्रमाणे
A.Just like own children
A.بالکل اپنے بچوں کی طرح

137 निर्देश: खालीदिलेल्या अक्षराच्या क्रमात काही अक्षरे गहाळ केली आहेत ते त्या क्रमाने खाली दिलेल्या पर्यायांपैकी एक आहे

ab_ baca_ _ab_ b_ bc

DIRECTIONS: In each of the following letter series, same of the letters are missing which are given in that order as one of the alternatives below it.

ab_ baca_ _ab_ b_ bc

دایت جیل کے حرف سرج میں کوئی حرف گمشدہ ہے آپکو انکی شناخت جیل کے اختیارات سے کرنی ہے

ab_ baca_ _ab_ b_ bc

A.ababa
A.ababa
A.ababa

B.acbac
B.acbac
B.acbac

C.acbca
C.acbca
C.acbca

D.acacb
D.acacb
D.acacb

Answer: B.acbac
B.acbac
B.acbac

138 निर्देश: खालीलपैकी प्रत्येक प्रश्नात, मालिकेमधील एक संख्या चुकीची आहे. चुकीची संख्या शोधा.
3, 5, 12, 39, 154, 772, 4634

DIRECTION: In each of the following questions, one number is wrong in the series. Find out the wrong number.

3, 5, 12, 39, 154, 772, 4634

ہدایت ہر سوال میں یک نمبر غلط ہے . اس غلط نمبر کو کھوجے .

3, 5, 12, 39, 154, 772, 4634

A.5
A.5
A.5

B.3
B.3
B.3

C.39
C.39
C.39

D.154
D.154
D.154

Answer: C.39
C.39
C.39

139	जर $8^a = 10b$ आणि $2^a = 5b$, तर 'a' बरोबर किती: If $8^a = 10b$ and $2^a = 5b$, then 'a' is equal to: اگر $8^a = 10b$ اور $2^a = 5b$ تو 'a' برابر ہوگا
	A. 1
	B. 1/2
	C. 0
	D. 1
Answer:	B. 1/2
140	अनुक्रम 13, 26, 39,..... चे 9वे पद शोधा Find the 9th term of the sequence: 13, 26, 39,..... اس سرج کی نووی ٹرم کیا ہے ؟: 13, 26, 39,.....
	A.402 A.402 A.402
	B.117 B.117 B.117
	C.208 C.208 C.208
	D.220 D.220 D.220
Answer:	B.117 B.117 B.117

141 जमीनीवर चालणाऱ्या वाहनांमध्ये खालीलपैकी कोणते इंधन वापरले जाते?

Which of the following fuels are used in land vehicles?

مندرجہ ذیل ایندھن میں سے کونسا زمینی گاڑیوں میں استعمال کیا جاتا ہے؟

A.पेट्रोल
A.Petrol
A. پٹرول

B.डिझल
B.Diesel
B. ڈیزل

C.सीएनजी
C.CNG
C. سی این جی

D.वरीलपैकी सर्व
D.All the above
D. مندرجہ بالا تمام

Answer: D.वरीलपैकी सर्व
D.All the above
D. مندرجہ بالا تمام

142 खालीलपैकी कश्याला भारताचा जैव-विविधता हॉटस्पॉट म्हणतात?

Which of the following is known as “Bio-Diversity hotspot of India”?

مندرجہ ذیل میں سے کون "بھارت کا بایو ڈائورسٹی ہاٹ سپاٹ" کے طور پر جانا جاتا ہے؟

A.पश्चिम घाट
A.Western Ghat
A. مغربی گھاٹ

B.पूर्विय घाट
B.Eastern Ghat
B. مشرقی گھاٹ

C.पश्चिम हिमालय
C.Western Himalya
C. مغربی ہمالیہ

D.वरीलपैकी एकही नाही
D.None of these
D. ان میں سے کوئی بھی نہیں

Answer: A.पश्चिम घाट
A.Western Ghat
A. مغربی گھاٹ

143 सूचना: प्रत्येक प्रश्नाला एक प्रमुख विधानासोबत चार विधाने आहेत ज्यांच्याखाली A, B, C आणि D असे चार विधान आहेत. क्रमवार विधानांची जोडी निवडा ज्यामध्ये प्रथम विधान दुसऱ्या विधानाला सुचवते, आणि दोन्ही विधाने तर्किकदृष्ट्या प्रमुख विधानासोबत निगडित असेल.

जर जुलैमध्ये पाऊस पडत नाही, तेव्हा दुष्काळ पडेल
A. जुलैमध्ये पाऊस झाला नाही
B. जुलैमध्ये पाऊस पडला
C. तेथे दुष्काळ पडला होता
D. तेथे दुष्काळ पडला नव्हता

DIRECTIONS: Each question has a main statement followed by four statements labelled A, B, C and D. Choose the ordered pair of statements, where the first statement implies the second, and the two statements are logically consistent with the main statement.

When it does not rain in July , there will be drought
A. it did not rain in July
B. it rained in July
C. there was drought
D. there was no drought

ہدایت: ہر سوال میں ایک جملہ ہے جسکے بعد چار جملےاے، بی،سی اور ڈی کے نام سے دئے گئے ہیں اسمیں منسلک جوڑیوں کو چنئے۔ جہاں پہلا جملہ دوسرے جملہ کی اور اشارہ کر رہا ہے اور دو جملے منطقی مرکزی بیان کے مطابق ہیں

اگر جولائی میں بارش نہ ہوئی تو خشک سالی ہو گی۔
Aجولائی میں بارش نہیں ہوئی ۔
Bجولائی میں بارش ہوئی ۔
Cخشک سالی ہو گئی تھی ۔
Dخشک سالی نہیں ہوئی تھی ۔

A.AC
A.AC
A.AC

B.BC
B.BC
B.BC

C.DA
C.DA
C.DA

D.CD
D.CD
D.CD

Answer: A.AC
A.AC
A.AC

144 विधान:
भारतीय राजनैतिक कार्याचा एक सदस्य राज्य रहस्ये खरेदी करण्यासाठी पकडला गेला.

कृतीचा कोर्स:
I. भारताने कारवाई केली आहे हे नाकारणे आवश्यक आहे.
II. संबंधित राजनयिकांची आठवण करून द्यावी.

Statement:
A member of Indian diplomatic mission was caught buying State secrets.
Course of actions:
I. India should deny that the action has taken place.
II. The diplomat concerned should be recalled

بیان:
انڈین ڈپلومیٹک مشن کا ایک رکن ریاستی راز خریدتے ہوئے پکڑا گیا۔

لائحہ عمل:
I۔انڈیا کو انکار کر دینا چاہیے کہ ایسا کوئی واقعہ ہوا ہے۔
II۔ متعلقہ ڈپلومیٹ کو واپس بلا لینا چاہیے۔

A.फक्त I अनुसरून आहे
A.Only I follows
A. صرف I لاگو ہو گا۔

B.फक्त II अनुसरण करते आहे
B.Only II follows
B. صرف II لاگو ہو گا۔

C.एकतर I किंवा II अनुसरून आहे
C.Either I or II follows
C. I یا II میں سے ایک لاگو ہو گا۔

D.I किंवा II दोन्हीपैकी काहीही अनुसरण करत नाही
D.Neither I nor II follows
D. I اور II میں سے کوئی بھی لاگو نہیں ہو گا۔

Answer: B.फक्त II अनुसरण करते आहे
B.Only II follows
B. صرف II لاگو ہو گا۔

145 अनोळखी व्यक्तीबद्दल वाटणारी अस्वस्थता यानंतर लगेच विकसित होते

Stranger anxiety develops soon after

اجنبی تشویش اس کے بعد جلد ہی ڈولپ ہوتی ہے

A.जतनाची संकल्पना
A.the concept of conservation
A.تحفظ کا تصور

B.आत्मकेंद्रितपणा
B.egocentrism
B.خود مرکزیت

C.मनाचा सिद्धांत
C.the theory of mind
C.دماغ کی سوچ

D.कर्म करण्याची संकल्पना
D.the concept of object performance
D.شئے کی کارکردگی کا تصور

Answer: D.कर्म करण्याची संकल्पना
D.the concept of object performance
D.شئے کی کارکردگی کا تصور

146 भारत आणि पाकिस्तान दरम्यानच्या सीमेला _____ म्हटले जाते

The border between India & Pakistan is called –

بھارت پاکستان کے بیچ کی سرحد کا نام ہے۔

A.मॅक मोहन लाईन
A.Mc Mahon Line
A.مک ماہون لائن

B.रॅडक्लिफ लाईन
B.Radcliffe Line
B.ریڈکلف لائن

C.माऊंट बॅटन लाईन
C.Mount batten Line
C.ماؤنٹ بیٹن لائن

D.यांपैकी कोणतेही नाही
D.None of these
D.ان میں سے کوئی نہیں

Answer: B.रॅडक्लिफ लाईन
B.Radcliffe Line
B.ریڈکلف لائن

147

सूचना: खालील प्रश्नात एक उघडलेला फासा दाखविला आहे. उत्तराच्या पर्यायांपैकी कोणता पर्याय 5 या चिन्हाच्या विरुद्ध बाजूला येईल?

DIRECTIONS: In the following question an unfolded dice is given. From the given alternatives which of the following will be opposite of 5?

ہدایات: مندرجہ ذیل سوال میں ایک کھلا ہوا ڈبہ دیا گیا ہے- دیئے گئے متبادلات میں مندرجہ ذیل میں سے کون 5 کے برعکس ہو گا؟



A. 3

B. 2

C. 4

D. 6

Answer: A. 3

148 खालील शब्दांची चढत्या क्रमाने मांडणी करून खाली दिलेल्या प्रतिसादांमधून कोणता अर्थपूर्ण क्रम असेल?

1. आई
2. बालक
3. दूध
4. रडणे
5. हसणे

Which one of the given responses would be a meaningful order of the following words in ascending order?

1. Mother
2. Child
3. Milk
4. Cry
5. Smile

چڑھتی ہوئی ترتیب میں دیےگیے جوابات میں سے کونسا ایک مندرجہ ذیل الفاظ کی معنی خیز ترتیب ہوگی؟
1. ماں
2. بچہ
3. دودھ
4. رونا
5. مسکراہٹ

A.1, 5, 2, 4, 3
A.1, 5, 2, 4, 3
A.1, 5, 2, 4, 3

B.2, 4, 1, 3, 5
B.2, 4, 1, 3, 5
B.2, 4, 1, 3, 5

C.2, 4, 5, 4, 1
C.2, 4, 5, 4, 1
C.2, 4, 5, 4, 1

D.3, 2, 1, 5, 4
D.3, 2, 1, 5, 4
D.3, 2, 1, 5, 4

Answer: B.2, 4, 1, 3, 5
B.2, 4, 1, 3, 5
B.2, 4, 1, 3, 5

149

जर 'a' म्हणजे '÷', 'b' म्हणजे '+', 'c' म्हणजे '−', 'd' म्हणजे 'x', तर 24a6d4b9c8 = ?

If 'a 'denotes '÷', 'b' denotes '+', 'c' denotes '−', 'd' denotes 'x', then 24a6d4b9c8 = ?

24a6d4b9c8 = ? اگر 'a' '÷' کو بیان کرتا ہے 'b' '+' کو بیان کرتا ہے 'c' '-' کو بیان کرے 'x"d' کو بیان کرے تو

A. 2

B. 17

C. 34

D. 19

Answer: B. 17

150 आपल्या स्वत:ला शिक्षकी व्यवसायात पाहायला आवडेल-

You would like to prefer to join a teaching profession—

آپ تدریس کے پیشے میں شمولیت اختیار کرنا پسند کریں گے

A.आपल्या भेटीसाठी गावाच्या मोठ्या शाळेत लाच देऊ
A.By giving bribery for your appointment in village town school
A.گاؤں شہر کے اسکول میں اپنی تقرری کے لئے رشوت دینے کے ذریعہ

B.राष्ट्रीय स्तरावरील स्पर्धेत उत्कृष्ठ प्रदर्शन करण्याद्वारे
B.By exalting your excellence in national level competition
B.قومی سطح پر مقابلہ میں اپنی اتھارٹی کو بڑھانے سے

C.नोकरीच्या परिस्थिती खूप गंभीर झाल्यामुळे कुठल्याहीप्रकारे
C.By any means as job conditions are very difficult
C.کسی بھی ذریعہ سے،کیونکہ نوکری کے حالات بہت مشکل ہیں

D.राजकीय मदत घेऊन.
D.By seeking political support.
D.-سیاسی حمایت کی تلاش سے

Answer: B.राष्ट्रीय स्तरावरील स्पर्धेत उत्कृष्ठ प्रदर्शन करण्याद्वारे
B.By exalting your excellence in national level competition
B.قومی سطح پر مقابلہ میں اپنی اتھارٹی کو بڑھانے سے

151 खालीलपैकी अशुद्ध वाक्य कोणते ?

A.नवे कवी खूप चांगल्या कविता लिहित आहेत.

B.तो माधवसोबत संथ गतीने चालू लागला.

C.ती घरातच त्यांची बोलणी ऐकत असे.

D.विनाकारण काही गोष्टी आयुष्याला पूर्ण होत नाहीत.

Answer: D.विनाकारण काही गोष्टी आयुष्याला पूर्ण होत नाहीत.

152 कंटेनरमधून 6 लिटर दूध काढले आणि त्या जागी पाणी टाकले. पुन्हा 6 लिटर मिश्रण काढले आणि त्याच्या जागी पाणी घातले. त्यामुळे त्या दोन कार्यांनंतर कंटेनरमधील दूध आणि पाण्याचे प्रमाण हे 9 : 16 झाले. मिश्रणाचे प्रमाण किती आहे?

From a container, 6 liters milk was drawn out and was replaced by water. Again 6 liters of mixture was drawn out & was repalced by the water. Thus the quantity of milk and water in the container after these two operations is 9 : 16. The quantity of mixture is

ایک کنٹینر سے، 6 لیٹر دودھ نکال دیا گیا اور اس کی جگہ پانی ڈال دیا گیا. ایک بار پھر 6 لیٹر کا مرکب نکال دیا گیا تھا اور اس کی جگہ پانی ڈال دیا گیا۔ اس طرح ان دو مرتبہ کے بعد کنٹینر میں دودھ اور پانی کی مقدار 9 : 16ہے۔ مرکب کی مقدارکتنی ہے

A.15
A.15
A.15

B.16
B.16
B.16

C.25
C.25
C.25

D.31
D.31
D.31

Answer: A.15
A.15
A.15

153 एका विशिष्ट सांकेतिक भाषेमध्ये, जर ADVANTAGE हा शब्द EFWEPVEHI असा कूटबध्द केला जात असेल, DUPLICATE हा शब्द त्या भाषेत कसा कूटबध्द केला जाईल?

In a certain code language, if the word ADVANTAGE is coded as EFWEPUEIF, then how is the word DUPLICATE coded in that language?

ایک مخصوص ضابطے کی زبان میں، اگر لفظ ADVANTAGE کو EFWEPVEHI لکھا جاتا ہے، تو اس زبان میں لفظ DUPLICATE کو کیسے لکھاجائیگا؟

A.EAQMODEUF
A.EAQMODEUF
A.EAQMODEUF

B.FAQMODEUI
B.FAQMODEUI
B.FAQMODEUI

C.FAQMODEVI
C.FAQMODEVI
C.FAQMODEVI

D.FAQMJDEVI
D.FAQMJDEVI
D.FAQMJDEVI

Answer: C.FAQMODEVI
C.FAQMODEVI
C.FAQMODEVI

154 निर्देश: खालील प्रश्नांमध्ये प्रश्न चिन्हाच्या (?) जागी कोणते अंदाजे मूल्य यायला हवे?
3739+164×27=?

DIRECTIONS: What approximate value should come in the place of question mark (?) in the following equations.

3739+164×27=?

ہدایات: مندرجہ ذیل سوال میں سوال کا نشان (?) کی جگہ پر کون سا تخمینہ ویلیو آئے گا -
3739+164×27=?

A.8000
A.8000
A.8000

B.4000
B.4000
B.4000

C.8200
C.8200
C.8200

D.6900
D.6900
D.6900

Answer: C.8200
C.8200
C.8200

155 भारतामधील अप्रत्यक्ष कर रचनेमधील खालील पैकी कोणती सुधारणा आहे?

Which of the following is a reform in India’s Indirect tax structure?

ان میں سے کون سا بھارت میں انڈائریکٹ ٹیکس اسٹرکیچر کا ریفارم ہے۔

A.रिटेलमधील एफडीआय
A.FDI in retail
A.ایف ڈی آئی رٹیل میں

B.जीएसटी
B.GST
B.جی ایس ٹی

C.चलनबंदी
C.Demonetization
C.نوٹبندی

D.हे सर्व
D.All of these
D.اوپر دئیے گئے سبھی

Answer: B.जीएसटी
B.GST
B.جی ایس ٹی

156 निर्देश: खालील प्रश्नांमध्ये प्रश्न चिन्हाच्या जागी (?) काय येईल?
$348÷29×15+156=(?)^3+120$

DIRECTIONS:What will come in place of the question mark (?) in the following questions.
$348÷29×15+156=(?)^3+120$

ہدایت: نیچے دئے ہوئے سوالات میں سوالیہ نشان (؟) کی جگہ کیا آئیگا۔
348÷29×15+156=(?)3+120

A.12
A.12
A.12

B.6
B.6
B.6

C.36
C.36
C.36

D.9
D.9
D.9

Answer: B.6
B.6
B.6

157 सूचना: दिलेल्या पर्यायांमधून वेगळे ते निवडा.

DIRECTIONS: Choose the odd one out from the given alternatives.

ہدایت: دیے گئے متبادل میں سے بے جوڑ کو چنیں۔

A.हळद
A.Turmeric
A.ہلدی

B.भोपळा
B.Gourd
B.کریلا

C.ऍपल
C.Apple
C.سیب

D.गाजर
D.Carrot
D.گاجر

Answer: B.भोपळा
B.Gourd
B.کریلا

158 **सूचना:** खालील प्रश्नात उत्तरातील पर्यायांपैकी कोणत्या पर्यायी आकृतीत प्रश्नातील आकृती अंतर्भूत आहे?

DIRECTIONS: In the given question find the answer figure in which question figure is embedded.

ہدایات: دیئے گئے سوال میں سے اس جواب والی تصویر کو تلاش کریں جس میں سوال کی تصویر منسلک ہے۔

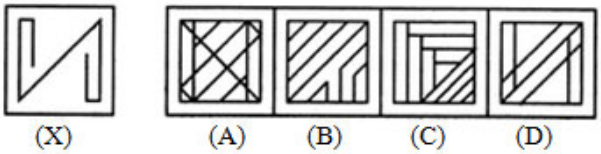

A. (A)

B. (B)

C. (C)

D. (D)

Answer: A. (A)

159 सूचना: खालील माहिती काळजीपूर्वक वाचा आणि खालील प्रश्नांची उत्तरे द्या:
कंपनीचे सात प्रतिनिधि -सागर,नीलू, रीमा, श्वेता, गरिमा, पार्थ आणि मोहित तीन वेगवेगळ्या देशांमध्ये गेले, ते देश आहेत दक्षिण आफ्रिका, ऑस्ट्रेलिया आणि फ्रान्स. त्यांच्यापैकी प्रत्येकाने आठवड्याच्या वेगवेगळ्या दिवशी प्रवास केला (कोणत्याही दोन व्यक्तींनी एकाच दिवशी प्रवास केला नाही) सोमवार पासून सुरुवात करुन, रविवारी समाप्त केला. किमान दोन लोकांनी प्रत्येक देशात प्रवास केला आणि दक्षिण आफ्रिका हा एकच असा देश होता जिथे तीन लोक गेले.
सागर दक्षिण आफ्रिकेला सोमवारी गेला. पार्थ ऑस्ट्रेलियाला गेला पण तो ना मंगळवारी गेला ना शनिवारी गेला. मोहित रविवारी गेला पण तो फ्रान्सला गेला नाही. जी व्यक्ती ऑस्ट्रेलियाला गेली तिने मंगळवारी प्रवास केला आणि जी फ्रान्सला गेली तिने शनिवारी प्रवास केला. गरिमाने बुधवारी प्रवास केला. रिमा दक्षिण आफ्रिकेला गेली पण गुरुवारी गेली नाही. निलू फ्रान्सला गेली नाही.
नीलूने कोणत्या देशात कोणत्या दिवशी प्रवास केला?

DIRECTIONS: Study the following information carefully and answer the questions given below.
Seven representatives of a company — Sagar, Nilu, Reema, Shweta, Garima, Parth and Mohit travelled to three different countries i.e. South Africa, Australia and France. Each of them travelled on different days of the week (no two persons travelled on the same day), starting on Monday and ending on Sunday. Minimum two people travelled to each country and South Africa is the only country to which three people travelled.
Sagar travelled to South Africa on ‘Monday. Parth travelled to Australia but neither on Tuesday nor on Saturday. Mohit travelled on Sunday but not to France. The one who travelled to Australia travelled on Tuesday and the one who travelled to France travelled on Saturday. Garima travelled on Wednesday. Reema travelled to South Africa but not on Thursday. Nilu did not travel to France.
To which county and on which day did Nilu travel?

ہدایات: مندرجہ ذیل معلومات کو دھیان سے پڑھیں اور نیچے دیے گئے سوالوں کے جواب دیں۔
ایک کمپنی کے سات نمائندے – ساگر، نیلو، ریما، شویتا، گریما، پارتھ اور موہت نے تین مختلف ملکوں یعنی جنوبی افریقہ، آسٹریلیا اور فرانس کا سفر کیا۔ ان میں سے ہر ایک نے پیر سے شروع اور سنیچر کو ختم کرکے ہفتہ کے مختلف دنوں میں سفر کیا (کسی دو شخص نے ایک ہی دن سفر نہیں کیا)۔ کم سے کم دو افراد نے ہر ایک ملک کا سفر کیا اور جنوبی افریقہ واحد ملک ہے جس کا تین لوگوں نے سفر کیا۔
ساگر نے پیر کے دن جنوبی افریقہ کا سفر کیا۔ پارتھ نے آسٹریلیا کا سفر کیا لیکن نہ تو منگل کو اور نہ ہی سنیچر کے روز۔ موہت نے اتوار کو سفر کیا لیکن فرانس کا نہیں۔ جس نے آسٹریلیا کا سفر کیا اس نے منگل کے روز سفر کیا اور جس نے فرانس کا سفر کیا اس نے اس نے سنیچر کے دن سفر کیا۔ گریما نے بدھ کو سفر کیا۔ ریما نے جنوبی افریقہ کا سفر کیا لیکن جمعرات کو نہیں۔ نیلو نے فرانس کا سفر نہیں کیا۔
نیلو نے کس ملک کا اور کس دن سفر کیا؟

A.बुधवार, दक्षिण आफ्रिका
A.Wednesday, South Africa
A.بدھ، جنوبی افریقہ

B.शुक्रवार, ऑस्ट्रेलिया
B.Friday, Australia
B.جمعہ، آسٹریلیا

C.गुरूवार, ऑस्ट्रेलिया
C.Thursday, Australia
C.جمعرات، آسٹریلیا

D.मंगळवार, ऑस्ट्रेलिया
D.Tuesday, Australia
D.منگل، آسٹریلیا

Answer: D.मंगळवार, ऑस्ट्रेलिया
D.Tuesday, Australia
D.منگل، آسٹریلیا

160 अनुभा आणि तिच्या आईच्या वर्तमान वयाचे गुणोत्तर 1:2 आहे. आतापासून 6 वर्षांनंतर त्यांच्या वयाचे गुणोत्तर 11:20 होईल. 18 वर्षांपूर्वी त्यांच्या वयाचे गुणोत्तर काय होते?

The ratio of the present ages of Anubha and her mother is 1 : 2. After 6 years from now the ratio of their ages will be 11 : 20. What was the ratio of their ages 18 years ago?

انوبھا اور کی والدہ کی عمروں کا تناسب 1:2 ہے۔ آج سے 6 سال بعد ان کی عمروں کا تناسب 11:20 ہو گا۔18 سال پہلے اُن کی عمروں کا کیا تناسب تھا؟

A.3:5
A.3:5
A.3:5

B.2:7
B.2:7
B.2:7

C.1:4
C.1:4
C.1:4

D.2 : 5
D.2 : 5
D.2 : 5

Answer: C.1:4
C.1:4
C.1:4

161 **सूचना:** खालील प्रश्नात उत्तरातील पर्यायांपैकी कोणत्या पर्यायी आकृतीत प्रश्नातील आकृती अंतर्भूत आहे?

DIRECTIONS: In the given question find the answer figure in which question figure is embedded.

ہدایات: دیئے گئے سوال میں سے اس جواب والی تصویر کو تلاش کریں جس میں سوال کی تصویر منسلک ہے۔

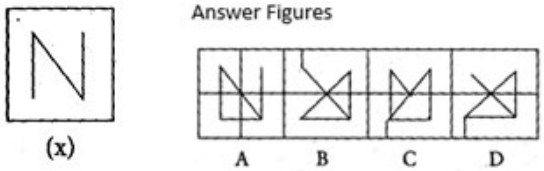

A. (A)

B. (B)

C. (C)

D. (D)

Answer: A. (A)

162 MS –Word हे _____ एक आहे

MS – word is a/an –

ایم ایس ورڈہے-

A.ऑपरेटींग सिस्टीम
A.Operating System
A.آپریٹنگ سسٹم

B.वेब ब्राऊजर
B.Web Browser
B.ویب براؤسر

C.शोध इंजिन
C.Search Engine
C.سرچ انجن

D.सॉफ्टवेअर
D.Software
D.سافٹ وئیر

Answer: D.सॉफ्टवेअर
D.Software
D.سافٹ وئیر

163 दिलेल्या मालिकेचा मध्यक काढा.
8, 2, 3, 4, 5, 4, 9

Find the median of the given series.
8, 2, 3, 4, 5, 4, 9

دی ہوئی سیریز کا اوسط (میڈین) ہوگا
8, 2, 3, 4, 5, 4, 9

A.4
A.4
A.4

B.3
B.3
B.3

C.2
C.2
C.2

D.8
D.8
D.8

Answer: A.4
A.4
A.4

164

$$\frac{5 \times 5 \times 5 + 4 \times 4 \times 4}{5 \times 5 - 5 \times 4 + 4 \times 4} = ?$$

A. 9

B. 11

C. 15

D. 20

Answer: A. 9

165 सूचना: अर्थपूर्ण परिच्छेद निर्माण करण्यासाठी, खाली दिलेली (P), (Q) (R), (S) आणि (T) ही पाच वाक्ये योग्य अनुक्रमाने पुनर्रचना करा; त्यांनतर खालील प्रश्नांची उत्तर द्या.

P. मुंगीने त्याला सांगितले कि, ती हिवाळ्याची तयारी करत आहे कारण तेव्हा अन्न दुर्मिळ होईल.
Q. लवकरच हिवाळा सुरु झाला आणि नाकतोड्याला जगण्यासाठी अन्न उपलब्ध नव्हते, तर मुंग्या आपल्या उबदार घरट्यात मक्याचा आनंद घेत होत्या.
R. आपल्या घरट्याकडे मक्याच्या जाड कणीस घेऊन जाणाऱ्या मुग्या पाहून, तशी कठोर मेहनत करण्यापेक्षा आपल्यासोबत मौजमजा करण्यासाठी नाकतोड्यानें मुंगीला बोलावले.
S. त्यावर हसून नाकतोडा म्हणाला सध्याचा वर्तमानकाळ चांगला असताना हिवाळ्याची चिंता कशाला हवी
T. तो एक आंनदी दिवस होता आणि नाकतोडा गात, नाचत आनंदाने बागडत होता.

पुनर्रचना केल्यानंतर खालीलपैकी कोणते वाक्य पहिले असेल?

DIRECTION: Rearrange the following five sentences (P), (Q), (R), (S) and (T) in the proper sequence to form a meaningful paragraph; then answer the questions given below them.
P. The ant tells him that it is preparing for winter when food would be scarce.
Q. Winter soon begins, and the grasshopper has no food to survive, while the ants enjoy the corn in the warmth of their nest.
R. Upon seeing an ant carrying a heavy corn kernel to its nest, the grasshopper asks the ant to join him for some fun, instead of working hard like that.
S. The grasshopper laughs and says why care for winter when the present is good.
T. It was a pleasant day and the grasshopper was in a gay mood, singing and dancing around.

Which of the following should be the FIRST sentence after rearrangement?

ہدایات: ان پانچ جملوں (P)، (Q)، (R)، (S) اور (T) کو با معنی پیرا بنانے کے لئے دوبارہ ترتیب دیجئے، پھر نیچے دے گئے سوالوں کے جواب دیجئے

P. چھینٹی نے اسے کہا کہ وو سردی کے لئے تیاری کر رہی ہے جب کھانے کی کمی ہوگی.
Q. جلد ہی سردی شرو ہو گی، ٹیڈا کو جینے کے لئے کھانا نہیں تھا، جب کہ چھینٹی اناج کہ مزا اپنے گھونسے کی گرمی میں لے رہی تھی.
R. جب اسے دیکھا کہ چھینٹی ایک بڑا اناج کہ دانا لے جا رہی ہے، تیڈے نے اسے کہا کہ انکے ساتھ مزا کرے،سخت محنت کرنے سے اچھا ہے.
S. ٹیڈا حصّہ اور کہا سردی کی فکر کیوں کرنی جب حاضر وقت اچھا چل رہا ہے.
T. بہت اچھا دن تھا اور ٹیڈا بہت خوش تھا ،گاتا اور ناچ رہا تھا.

دوبارہ ترییب دینے کے بعد کون سا جملہ پہلے ہونا چاہیے؟

A.T
A.T
A.T

B.S
B.S
B.S

C.P
C.P
C.P

D.Q
D.Q
D.Q

Answer: A.T
A.T
A.T

166 यादृच्छिकपणे निवडलेल्या लिप वर्षामध्ये, 53 रविवार असण्याची शक्यता काय असेल?

What is the chance that a leap year, selected at random will contain 53 Sunday?

کتنا امکان ہے بے ترتیب طور پر منتخب کیا گیا لیپ سال 53 اتوار پر مشتمل ہوگا؟

A.1/7
A.1/7
A.1/7

B.2/7
B.2/7
B.2/7

C.3/7
C.3/7
C.3/7

D.4/7
D.4/7
D.4/7

Answer: B.2/7
B.2/7
B.2/7

167 आपल्या वरिष्ठ सहकार्यांपैकी एकजण शाळेतील बहुसंख्य लोकांच्या सहाय्याने आपली ताकद दाखवत आहे. कधीकधी आपल्याला वाटते कि आपला सहकारी ढोंगी स्वभावाचा आहे म्हणून, तो सगळ्यांना आपल्या बाजूने करत आहे असे कळून येते. अशा परिस्थितीत आपण त्याच्याशी कसे जुळून घेणार?

One of the senior colleagues is trying to exercise his power through majority in the school. Sometimes you feel that the colleague has power mongering attitude and therefore, realizing it in his own favor. In such a condition how would you like to adjust with him?

سینئر ساتھیوں میں سے ایک ساتھی اسکول میں اکثریت کے ذریعہ اپنی طاقت کا استعمال کرنے کی کوشش کر رہا ہے۔ کبھی کبھی آپ کو محسوس ہوتا ہے کہ اس ساتھی میں اقتدار کی نگہداشت کا رویہ ہے اور اس وجہ سے یہ اسے اپنے حق میں محسوس کرتا ہے۔ اس صورت میں آپ اس کے ساتھ کیسے ایڈجسٹ کریں گے؟

A.आपण या गटातच राहणार पण त्याच्या कामात अडथळे निर्माण करणार
A.You remain in the group but create obstacles in channelizing his powers
A.آپ گروپ میں رہیں گے لیکن اس کے لئے طاقت کے استعمال میں رکاوٹ پیدا کریں گے

B.आपण आपला वेळ जास्त करून निर्मितीक्षम कामात घालवण्याचा प्रयत्न करणार
B.You try to pass your time in more creative manner
B.آپ اپنا وقت زیادہ تر تخلیقی انداز میں گذارنے کی کوشش کریں گے

C.आपण त्याच्या गटाच्या विरुध्द एक मजबूत गट स्थापन करणार
C.You establish another strong group against his party
C.آپ اس کی پارٹی کے خلاف ایک مضبوط گروپ قائم کریں گے

D.) आपण चांगल्या नीतिमत्तेची तत्वे त्याच्या समोर ठेवणार
D.You put forth the principles of upright behavior.
D.آپ صحیح راستے کے اصولوں کو پیش کریں گے.

Answer: D.) आपण चांगल्या नीतिमत्तेची तत्वे त्याच्या समोर ठेवणार
D.You put forth the principles of upright behavior.
D.آپ صحیح راستے کے اصولوں کو پیش کریں گے.

168 Out of the given options, choose the most appropriate one to fill in the blank.
My grandfather_____ at five every morning to do his exercises.

A.rises

B.have rise

C.have rose

D.has rise

Answer: A.rises

169	निर्देश: दिलेल्या अंक मालिकेतील चुकीची संज्ञा शोधा: 1, 27, 25, 343, 82, 1331 DIRECTIONS: Find the wrong term in the given number series: 1, 27, 25, 343, 82, 1331 ہدایت دے گئے نمبرس سرج مے غلط نمبر کھوجے 1, 27, 25, 343, 82, 1331
	A.25 A.25 A.25
	B.82 B.82 B.82
	C.1331 C.1331 C.1331
	D.343 D.343 D.343
Answer:	B.82 B.82 B.82

170 सूचना: खाली दिलेल्या प्रश्नांमध्ये प्रत्येकी तीन विधानांचे चार गट आहेत. प्रत्येक समूहातील विधाने काळजीपूर्वक वाचा आणि तिसरे विधान तर्कशुद्धपणे पहिल्या दोन विधानांचे अनुसरण करणारा(रे) गट ओळखा.
(a) अनेक कारंजी झरे असतात. कोणताही धबधबा कारंज नसतो. काही झरे धबधबे नसतात.
(b) कोणतीही बॅग पॅक नसते. कोणताही पॅक जॅक नसतो. कोणताही जॅक बॅग नसतो.
(c) कोणतेही चांगले वाईट नसते. सर्व वाईट चांगले नसते. काही चांगले, चांगले नसते.
(d) मापक पट्टी असते. कोणतीही पट्टी निर्देशक नसते. कोणताही निर्देशक मापक नसतो.

DIRECTION: The questions given below have four groups of three statements each. Read the statements in each group carefully and identify the group/groups where the third statement logically follows the first two statements in the group.

(a) Many fountains are cascades. No waterfall is fountain. Some cascades are not waterfalls.
(b) No bag is pack. No pack is jack. No jack is bag.
(c) No good is bad. All bad is not good. Some good is not good.
(d) Scale is ruler. No ruler is pointer. No pointer is scale.

ہدایت: ذیل میں دیے گئے سوالات کے تین بیانات میں سے ہر ایک کے چار گروپ ہیں۔ ہر گروپ میں بیانات کو دھیان سے پڑھیں اور اس گروپ/گروپس کی شناخت کریں جہاں تیسرا بیان منطقی طور پر گروپ میں پہلے دو بیانات کی پیروی کرتا ہو۔

(a) بہت سے فوارے آبشار ہیں۔ کوئی جھرنا فوارہ نہیں ہے۔ کچھ آبشار جھرنے نہیں ہیں۔
(b) کوئی بیگ پیک نہیں ہے۔ کوئی پیک جیک نہیں ہے۔ کوئی جیک بیگ نہیں ہے۔
(c) کوئی اچھا برا نہیں ہے۔ سبھی برا اچھا نہیں ہے۔ کچھ اچھا اچھا نہیں ہے۔
(d) اسکیل رولر ہے۔ کوئی رولر پوائنٹر نہیں ہے۔ کوئی پوائنٹر اسکیل نہیں ہے۔

A.केवळ a
A.Only a
A.صرف a

B.केवळ d
B.Only d
B.صرف d

C.केवळ b आणि c
C.Only b and c
C.صرف b اور c

D.केवळ a आणि d
D.Only a and d
D.صرف a اور d

Answer: D.केवळ a आणि d
D.Only a and d
D.صرف a اور d

171 55-70 च्या दरम्यान आयक्यू गुण असलेल्या एखाद्या व्यक्ती असा असतो

An individual with IQ score between 55 – 70 can

ایک فرد جس کا آئی کیو اسکور 55 سے 70 کے درمیان ہو وہ ممکن ہے:

A.कामाला धरून ठेवणारा
A.Hold a job
A. جاب رکھتا ہو

B.लग्न करून कुटुंब सांभाळणारा
B.Marry and have a family
B.شادہ شدہ ہو اور فیملی والا ہو

C.मित्र बनवणारा
C.Make friends
C.دوست بناتا ہو

D.a, b आणि c
D.a, b & c
D. a، b اور c

Answer:
A.कामाला धरून ठेवणारा
A.Hold a job
A. جاب رکھتا ہو

172 "फ्लाईंग शिख" कोणाला म्हटले जाते?

Who is called the ‘Flying Sikh’?

فلائنگ سکھ کے نام سے جانے جاتے ہیں۔

A.भगत सिंह
A.Bhagat Singh
A.بھگت سنگھ

B.मिल्खा सिंह
B.Milkha Singh
B.ملکھا سنگھ

C.हरभजन सिंह
C.Harbhajan Singh
C.ہربھجن سنگھ

D.कर्तार सिंह
D.Kartar singh
D.کرتار سنگھ

Answer:	B.मिल्खा सिंह B.Milkha Singh B.ملکھا سنگھ

173	Out of the given options, choose the one which is the correct indirect speech of the sentence given below. Joseph said, “I bought this pearl for my mother.”
	A.Joseph said that he bought this pearl for his mother.
	B.Joseph said that he have bought that pearl for his mother.
	C.Joseph said that he has bought this pearl for his mother.
	D.Joseph said that he had bought that pearl for his mother.
Answer:	D.Joseph said that he had bought that pearl for his mother.

174	निर्देश: खालील शब्दांची इंग्रजी शब्दकोशानुसार मांडणी करा. (a) Praise (b) Practical (c) Prank (d) Prayer (e) Practise DIRECTIONS: Arrange the following words according to the English dictionary. (a) Praise (b) Practical (c) Prank (d) Prayer (e) Practise ہدایت: انگریزی لغت کے مطابق مندرجہ ذیل الفاظ کو مرتب کریں۔ Praise (a) Practical (b) Prank (c) Prayer (d) Practise (d)

A.(b), (e), (a), (c), (d)
A.(b), (e), (a), (c), (d)
A.(b), (e), (a), (c), (d)

B.(d), (e), (a), (c), (b)
B.(d), (e), (a), (c), (b)
B.(d), (e), (a), (c), (b)

C.(a), (e), (b), (c), (d)
C.(a), (e), (b), (c), (d)
C.(a), (e), (b), (c), (d)

D.(e), (b), (a), (c), (d)
D.(e), (b), (a), (c), (d)
D.(e), (b), (a), (c), (d)

Answer: A.(b), (e), (a), (c), (d)
A.(b), (e), (a), (c), (d)
A.(b), (e), (a), (c), (d)

175 एक रक्कम प्रति वर्ष विशिष्ट सरळ व्याज दराने 5 वर्षांमध्ये दुप्पट होते आणि दुसरी रक्कम प्रति वर्ष दुसऱ्या सरळ व्याज दराने 12 वर्षांमध्ये तिप्पट होते. दोन्ही बाबतीत कमी असलेला व्याज दर काढा:

A sum of money at a certain rate per annum of simple interest doubles in the 5 years and an another sum of money becomes three times in 12 years at a different simple interest rate per annum. Interest rate which is lower between both cases:

ایک مبلغ رقم سالانہ سود مفرد کی ایک مخصوص در سے 5 سالوں میں خود کا دوگنا ہوجاتی ہے اور دوسری مبلغ رقم 12 سالوں ایک الگ سالانہ سود مفرد کی در سے تین گنا ہوجاتی ہے۔ درنوں صورت حال میں کونسا سود در کم ہے:

(A) 15%

(B) $16\frac{2}{3}\%$

(C) $15\frac{3}{4}\%$

(D) 20%

Answer: (B) $16\frac{2}{3}\%$

176 सूचना: खालील माहिती काळजीपूर्वक वाचा आणि खालील प्रश्नांची उत्तरे द्या:
कंपनीचे सात प्रतिनिधि -सागर,नीलू, रीमा, श्वेता, गरिमा, पार्थ आणि मोहित तीन वेगवेगळ्या देशांमध्ये गेले, ते देश आहेत दक्षिण आफ्रिका, ऑस्ट्रेलिया आणि फ्रान्स. त्यांच्यापैकी प्रत्येकाने आठवड्याच्या वेगवेगळ्या दिवशी प्रवास केला (कोणत्याही दोन व्यक्तींनी एकाच दिवशी प्रवास केला नाही) सोमवार पासून सुरुवात करुन, रविवारी समाप्त केला. किमान दोन लोकांनी प्रत्येक देशात प्रवास केला आणि दक्षिण आफ्रिका हा एकच असा देश होता जिथे तीन लोक गेले.
सागर दक्षिण आफ्रिकेला सोमवारी गेला. पार्थ ऑस्ट्रेलियाला गेला पण तो ना मंगळवारी गेला ना शनिवारी गेला. मोहित रविवारी गेला पण तो फ्रान्सला गेला नाही. जी व्यक्ती ऑस्ट्रेलियाला गेली तिने मंगळवारी प्रवास केला आणि जी फ्रान्सला गेली तिने शनिवारी प्रवास केला. गरिमाने बुधवारी प्रवास केला. रिमा दक्षिण आफ्रिकेला गेली पण गुरुवारी गेली नाही. निलू फ्रान्सला गेली नाही.
शेवटी प्रवास करणारी व्यक्ती कोण होती?

DIRECTIONS: Study the following information carefully and answer the questions given below.
Seven representatives of a company — Sagar, Nilu, Reema, Shweta, Garima, Parth and Mohit travelled to three different countries i.e. South Africa, Australia and France. Each of them travelled on different days of the week (no two persons travelled on the same day), starting on Monday and ending on Sunday. Minimum two people travelled to each country and South Africa is the only country to which three people travelled.
Sagar travelled to South Africa on ‘Monday. Parth travelled to Australia but neither on Tuesday nor on Saturday. Mohit travelled on Sunday but not to France. The one who travelled to Australia travelled on Tuesday and the one who travelled to France travelled on Saturday. Garima travelled on Wednesday. Reema travelled to South Africa but not on Thursday. Nilu did not travel to France.
Who was the last one to travel?

ہدایات: مندرجہ ذیل معلومات کو دھیان سے پڑھیں اور نیچے دیے گئے سوالوں کے جواب دیں۔
ایک کمپنی کے سات نمائندے – ساگر، نیلو، ریما، شویتا، گریما، پارتھ اور موہت نے تین مختلف ملکوں یعنی جنوبی افریقہ، آسٹریلیا اور فرانس کا سفر کیا۔ ان میں سے ہر ایک نے پیر سے شروع اور سنیچر کو ختم کرکے ہفتہ کے مختلف دنوں میں سفر کیا (کسی دو شخص نے ایک ہی دن سفر نہیں کیا)۔ کم سے کم دو افراد نے ہر ایک ملک کا سفر کیا اور جنوبی افریقہ واحد ملک ہے جس کا تین لوگوں نے سفر کیا۔
ساگر نے پیر کے دن جنوبی افریقہ کا سفر کیا۔ پارتھ نے آسٹریلیا کا سفر کیا لیکن نہ تو منگل کو اور نہ ہی سنیچر کے روز۔ موہت نے اتوار کو سفر کیا لیکن فرانس کا نہیں۔ جس نے آسٹریلیا کا سفر کیا اس نے منگل کے روز سفر کیا اور جس نے فرانس کا سفر کیا اس نے اس نے سنیچر کے دن سفر کیا۔ گریما نے بدھ کو سفر کیا۔ ریما نے جنوبی افریقہ کا سفر کیا لیکن جمعرات کو نہیں۔ نیلو نے فرانس کا سفر نہیں کیا۔
سفر کرنے والا آخری شخص کون تھا؟

A.सागर
A.Sagar
A.ساگر

B.रीमा
B.Reema
B.ریما

C.मोहित
C.Mohit
C.موہت

D.श्वेता
D.Shweta
D.شویتا

Answer: C.मोहित
C.Mohit
C.موہت

177 सूचनाः यापैकी कोणती आकृती प्रश्नामध्ये वापरलेल्या तीन शब्दांच्या दरम्यानचे नाते उत्तरित्या दर्शवते?
शिक्षक, प्राचार्य, मुलगा

DIRECTIONS: Which of the following figures represents the best relationship among the three terms used in the question.
Teacher, Principle, Son

ہدایات: مندرجہ ذیل میں سے کون سی ڈایاگرام درج ذیل سوال میں استعمال ہونے والے تین الفاظ کے درمیان بہترین تعلقات کی نمائندگی کرتی ہے.
استاد، اصول، بیٹا

(A) 

(B) 

(C) 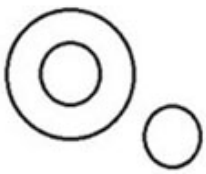

(D) 

Answer: (B) 

178 मुंशी प्रेमचंद हे _____ या भाषेमधील लेखक होते-

Munshi Premchand was a writer in the language of –

منشی پریم چند کس زبان کے مصنف ہیں۔

A.बंगाली
A.Bengali
A.بنگالی میں

B.इंग्रजी
B.English
B.انگلش میں

C.हिंदी
C.Hindi
C.ہندی میں

D.तामिळ
D.Tamil
D.تمل میں

Answer: C.हिंदी
C.Hindi
C.ہندی میں

179 दिलेल्या पर्यायांपैकी कोणती आकृती मुख्य आकृतीचे अचूक प्रतिबिंब आहे?

Which of the answer figure is exactly the mirror image of the given figure?

جواب کی کون سی تصویر، دی گئی تصویر کی بالکل صحیح آئینہ دار تصویر لکتی ہے؟

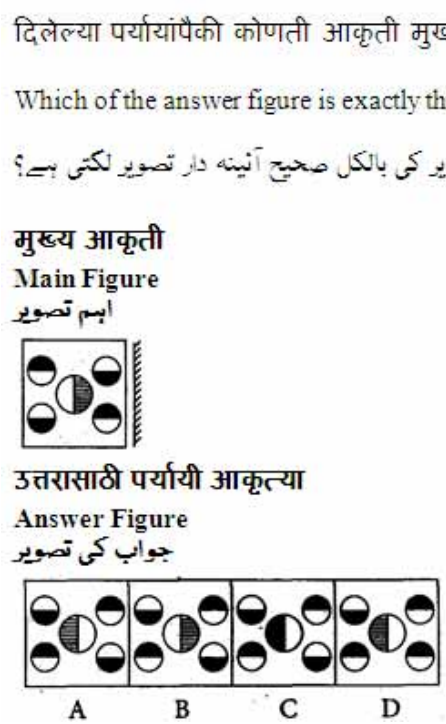

A. (A)

B. (B)

C. (C)

D. (D)

Answer: A. (A)

180	Choose the word which is most similar in meaning to the given word. VAIN
	A.Useless
	B.Useful
	C.Beneficial
	D.Nutritious
Answer:	A.Useless

181	आपण पालकांच्या त्या समस्यांवर आक्रमक झालात ज्या कि आपल्याला अपुऱ्या वाटतात कारण- You became aggressive on those parental issues which you feel inadequate because— آپ والدین کے ان مسائل پر جارحانہ بن گئے جو آپ کو ناکافی محسوس ہوتے ہیں، کیونکہ—
	A.त्याचा आपल्या डोक्यावर प्रचंड परिणाम झाला व आपल्या आयुष्यात अनेक अडथळे निर्माण करत आहे A.It has heavy impact on your brain and create obstacles in your life A.اس کا آپ کے دماغ پر یہ بہت بڑا اثر ہوتا ہے اوریہ آپ کی زندگی میں رکاوٹوں کا باعث بنتا ہے
	B.आपण त्यांच्या गैर-व्यवहारामुळे आपली सहानभूती गमावून बसलो B.You have lost sympathy in their inappropriate behavior B.ان کے نامناسب رویے کی وجہ سے آپ ہمدردی ختم کر دیتے ہیں
	C.आपण त्यांच्या विचारांचा तर्क काढू शकत नाही C.You cannot rationalize their thinking C.آپ ان کی سوچ کو معقول نہیں بنا سکتے
	D.आपला स्वभाव नकारात्मक झाला D.You have developed the negative attitude. D.آپ نے منفی رویہ اختیار کیا ہے.
Answer:	B.आपण त्यांच्या गैर-व्यवहारामुळे आपली सहानभूती गमावून बसलो B.You have lost sympathy in their inappropriate behavior B.ان کے نامناسب رویے کی وجہ سے آپ ہمدردی ختم کر دیتے ہیں

182	A sentence with an underlined idiomatic expression is given. What is the meaning of the idiomatic expression ‘jump to conclusions’ in the sentence given below? I know you found some suspicious things in her office, but don't jump to conclusions talk to her first.
	A.Form an opinion or judgement hastily
	B.To take a lot of time to decide something
	C.Consult many people and books before deciding or doing something
	D.None of the above
Answer:	A.Form an opinion or judgement hastily

183	आयक्यू असा मोजला जातो IQ is calculated as :آئی کیو کو کیلکولیٹ کیا جاتا ہے
	A.CA/MA × 100 A.CA/MA × 100 A.CA/MA × 100
	B.MA/CA × 100 B.MA/CA × 100 B.MA/CA × 100
	C.100/MA × CA C.100/MA × CA C.100/MA × CA
	D.यापैकी एकही नाही D.None of these D.ان میں سے کوئی نہیں
Answer:	A.CA/MA × 100 A.CA/MA × 100 A.CA/MA × 100

184 16 वर्षांच्या कार्तिकने त्याच्या शाळेत अलीकडे घेण्यात आलेल्या बुद्ध्यांक चाचणीत 75 गुण प्राप्त केले. त्याचे मानसिक वय असेल

Kartik 16 years scored in 75 in an 1Q last conducted at his school his mental age well be

16 سالہ کارتک نے اپنے اسکول میں آخری آئی قیو ٹسٹ میں 75 اسکور کیا تھا ایسے میں ان کی ذہنی عمر ہوگی

A.12
A.12
A.12

B.8
B.8
B.8

C.14
C.14
C.14

D.10
D.10
D.10

Answer: A.12
A.12
A.12

185 भारतात अपील करण्यासाठी सर्वोच्च न्यायालय आहे:

Highest Court of appeal in India is:

بھارت میں اپیل کی اعلی ترین عدالت ہے:

A.राष्ट्रपती
A.President
A. صدر

B.उच्च न्यायालय
B.High court
B. ہائی کورٹ

C.वेगळे न्यायालय
C.Separate court
C. الگ الگ عدالت

D.सर्वोच्च न्यायालय.
D.Supreme Court
D. سپریم کورٹ.

Answer:
D.सर्वोच्च न्यायालय.
D.Supreme Court
D. سپریم کورٹ.

186 जर आपला मित्र दुसऱ्या धर्माचा आहे, तो त्याच्या धार्मिक स्थळात जात असताना आपल्याला बाहेर वाट पाहण्यास सांगतो, अश्या परिस्थितीत आपण काय विचार करणार-

If your friend is the follower of different religion, he goes inside the religious place and ask you to wait outside, what would you like to think in this situation—

اگر آپ کا دوست مختلف مذہب کا پیروکار ہے، وہ مذہبی جگہ کے اندر جاتا ہے اور آپ سے باہر انتظار کرنے کا مطالبہ کرتا ہے، آپ اس صورت حال میں کیا سوچیں گے-

A.हे अधिक चांगले होईल, कि आपल्याला त्याच्याबरोबर धार्मिक स्थळ पहायला मिळेल
A.It will be better, if you get an opportunity to visit the religious place with
A.یہ بہتر ہوگا، اگر آپ کو مذہبی جگہ کا دورہ کرنے کا موقع ملے

B.आपण सोबत जाण्यासाठी नकार देऊ हे तो आधीच समजून जाईल, तो तुम्हाला विचारणारच नाही
B.Well he will understand you better before you refuse him to accompany, he does not coinpell you
B.ٹھیک ہےوہ آپ کو سمجھ جائے تو بہتر ہے، قبل اس کے کہ آپ اس سے انکار کریں ، وہ آپ پر جبرنہیں کرتا

C.आपण आपल्या धर्माप्रमाणे देवाचे जप करू
C.You will be meditating outside according to your religious conviction
C.آپ اپنے مذہبی حکم کے مطابق باہر مراقبہ کریں گے

D.आपण माणुसकीच्या कल्याणाकरिता धर्मनिरपेक्षतेप्रमाणे प्रार्थना करू
D.You will pray for the welfare of humanity in a secular manner.
D.-آپ سیکولر انداز میں انسانیت کی فلاح و بہبود کے لئے دعا کریں گے

Answer:
D.आपण माणुसकीच्या कल्याणाकरिता धर्मनिरपेक्षतेप्रमाणे प्रार्थना करू
D.You will pray for the welfare of humanity in a secular manner.
D.-آپ سیکولر انداز میں انسانیت کی فلاح و بہبود کے لئے دعا کریں گے

187 सूचना: प्रत्येक प्रश्नाला एक प्रमुख विधानासोबत चार विधाने आहेत ज्यांच्याखाली A, B, C आणि D असे चार विधान आहेत. क्रमवार विधानांची जोडी निवडा ज्यामध्ये प्रथम विधान दुसऱ्या विधानाला सुचवते, आणि दोन्ही विधाने तर्किकदृष्ट्या प्रमुख विधानासोबत निगडित असेल.

जर तुम्ही पुरेसे पाणी प्यायले, तर तुम्हाला कोणत्याही आरोग्यविषयक समस्या होणार नाहीत.
A. तुम्ही पुरेसे पाणी प्यायले
B. तुम्ही पुरेसे पाणी प्यायले नाही
C. तुम्हाला कोणत्याही आरोग्यविषयक समस्या नाहीत.
D. तुम्हाला कोणत्याही आरोग्यविषयक समस्या होत्या

DIRECTIONS: Each question has a main statement followed by four statements labelled A, B, C and D. Choose the ordered pair of statements, where the first statement implies the second, and the two statements are logically consistent with the main statement.

If you drink water sufficiently , you won't have any health issues .
A. you drank water sufficiently
B. you did not drink water sufficiently
C. you did not have any health issues .
D. you had health issues .

ہدایت: ہر سوال میں ایک جملہ ہے جسکے بعد چار جملےاے، بی،سی اور ڈی کے نام سے دئے گئے ہیں اسمیں منسلک جوڑیوں کو چنئے۔ جہاں پہلا جملہ دوسرے جملہ کی اور اشارہ کر رہا ہے اور دو جملے منطقی مرکزی بیان کے مطابق ہیں

اگر آپ مناسب مقدار میں پانی پیئیں تو آپ بیمار نہیں ہوں گے۔
Aآپ نے مناسب مقدار میں پانی پیا ۔
Bآپ نے مناسب مقدار میں پانی نہیں پیا ۔
C-آپ بیمار نہیں ہوئے ۔
D-آپ بیمار ہوئے ۔

A.AC
A.AC
A.AC

B.BC
B.BC
B.BC

C.DA
C.DA
C.DA

D.CD
D.CD
D.CD

Answer:	A.AC A.AC A.AC

188	खालीलपैकी स्त्रीलिंगी शब्द ओळखा.
	A.भार
	B.भार्या
	C.भाल
	D.भाव
Answer:	B.भार्या

189	सूचना: दिलेल्या पर्यायांमधून वेगळे ते निवडा. DIRECTIONS: Choose the odd one out from the given alternatives. دیے گئے متبادل میں سے بے جوڑ کو چنیں۔
	A.गाजर A.Carrot A.گاجر
	B.बटाटा B.Potato B.آلو
	C.आले C.Ginger C.ادرک
	D.कोबी D.Cabbage D.گوبھی
Answer:	D.कोबी D.Cabbage D.گوبھی

For More Info And Videos About TAIT-Exam Syllabus And Other Exam Visit My Channel
TAIT च्या 30 प्रश्नपत्रिका PDF
BADSHAHimp Available Request 9765226781
WWW.YouTube.com/BADSHAHimp
Subscribe My Channel

190 सूचना: खालील दिलेल्या प्रश्नामध्ये काही विधाने आणि काही निष्कर्ष आहेत. सामन्यात: ज्ञात तथ्यांपेक्षा ते वेगळे असतील तर दिलेली विधाने तुम्हाला सत्य मानवी लागतील आणि त्यानंतर दिलेल्या विधानाचे अनुकरण दिलेल्यापैकी कोणता निष्कर्ष तार्किकदृष्ट्या करतो ते ठरवा.

विधाने:
V ≥ K > M = N
निष्कर्ष:
I. V ≥ M
II. V = N

DIRECTIONS: In the question given below, there are few statements followed by few conclusions. You have to take the given statements to be true even if they seem to be at variance with commonly known facts and then decide which of the given conclusion logically follow(s) from the given statements.

Statements:
V ≥ K > M = N
Conclusions:
I. V ≥ M
II. V = N

ہدایات: مندرجہ ذیل سوال میں، کچھ بیانات کے بعد کچھ نتائج موجود ہیں. اگر آپ کو عام طور پر جانے جاتے حقائق کے ساتھ بھی متغیر ہونے لگے تو بھی آپ دئے گئے بیانات دماغ میں رکھیں اور پھر اس بات کا فیصلہ کریں کہ ذیل میں دیا گیا کونسا نتیجہ منطقانہ طور پر دیے گئے بیانات کی پیروی کرتا ہے.

بیانات:
V ≥ K > M = N
نتائج:
V ≥ M .I
V = N .II

A.तर फक्त I निष्कर्ष खरा आहे
A.If only conclusion I is true
A.اگر صرف I نتیجہ درست ہے

B.तर फक्त II निष्कर्ष खरा आहे
B.If only conclusion II is true
B.اگر صرف نتیجہ II درست ہے

C.तर I किंवा II यापैकी एक निष्कर्ष खरा आहे
C.If either conclusion I or II is true
C.اگر I اور II نتائج میں سے ایک درست ہے

D.तर I व II हे दोन्हीही निष्कर्ष खरे नाहीत
D.If neither conclusion I nor II is true
D.اگر I اور II نتائج میں سے کوئی بھی درست نہیں

For More Info And Videos About TAIT-Exam Syllabus And Other Exam Visit My Channel
TAIT च्या 30 प्रश्नपत्रिका PDF
BADSHAHimp Available Request 9765226781
WWW.YouTube.com/BADSHAHimp
Subscribe My Channel

Answer:	D.तर I व II हे दोन्हीही निष्कर्ष खरे नाहीत D.If neither conclusion I nor II is true D.اگر I اور II نتائج میں سے کوئی بھی درست نہیں

191	Out of the given four words only one is spelt correctly. Find the word that is correctly spelt.
	A.Embarrass
	B.Excede
	C.Exilerate
	D.Equiptment
Answer:	A.Embarrass

192	पृथ्वीचे वस्तुमान काय आहे? What is the mass of earth? زمین کا ماس (کمیت) کیا ہے؟
	A.5.972x 10^{24} किलोग्राम A.5.972x 10^{24} kg A.5.972×10^{24}کیلوگرام
	B.7.34x10^{22} किलोग्राम B.7.34x10^{22} kg B.7.34×10^{22} کیلوگرام
	C.1.98x10^{30} किलोग्राम C.1.98x10^{30} kg C.1.98×10^{30} کیلوگرام
	D.9.109x10^{31} किलोग्राम D.9.109x10^{31} kg D. 9.109×10^{31}کیلوگرام
Answer:	A.5.972x 10^{24} किलोग्राम A.5.972x 10^{24} kg A.5.972×10^{24}کیلوگرام

For More Info And Videos About TAIT-Exam Syllabus And Other Exam Visit My Channel
BADSHAHimp TAIT च्या 30 प्रश्नपत्रिका PDF Available Request 9765226781
YouTube WWW.YouTube.com/BADSHAHimp Subscribe My Channel

193

खालील आकृतीमध्ये, वर्तुळ ग्रामीण लोक दर्शवते, त्रिकोण सुशिक्षित लोक दर्शवतो, चौरस अधिकारी दर्शवतो आणि आयत महिला दर्शवतो.

In the following diagram, the circle represents Rural People, Triangle represents Educated People, square represents Officers and Rectangle represents Females.

مندرجہ ذیل ڈایاگرام میں، دائرہ دیہی عوام کی نمائندگی کرتا ہے، مثلث تعلیم یافتہ افراد کی نمائندگی کرتا ہے، مربع افسران کی نمائندگی کرتا ہے اور مستطیل خواتین کی نمائندگی کرتا ہے.

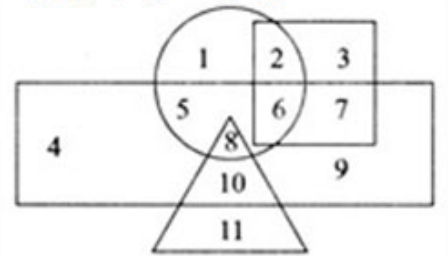

यापैकी कोणती संख्या अधिकारी नसलेल्या परंतु ग्रामीण महिला दर्शवते?

Which among the following represents uneducated females belonging to rural areas but Officers?

مندرجہ ذیل میں سے کونسا ان غیر تعلیم یافتہ عورتوں کی نمائندگی کرتا ہے جو دیہی علاقوں سے تعلق رکھتی ہیں لیکن افسران ہیں؟

A.5

B.8

C.2

D.10

Answer: A.5

194 Choose the word which is opposite in meaning to the given word.
DESPAIR

A.Hope

B.Hopelessness

C.Desperation

D.Distress

Answer: A.Hope

For More Info And Videos About TAIT-Exam Syllabus And Other Exam Visit My Channel
TAIT च्या 30 प्रश्नपत्रिका PDF
BADSHAHimp Available Request 9765226781
WWW.YouTube.com/BADSHAHimp
Subscribe My Channel

195	864 ÷ ? ÷ 9 = 3 864 ÷ ? ÷ 9 = 3 864 ÷ ? ÷ 9 = 3
	A.39 A.39 A.39
	B.21 B.21 B.21
	C.36 C.36 C.36
	D.यांपैकी कोणतेही नाही D.None of these D.ان مے سے کوئی نھی
Answer:	D.यांपैकी कोणतेही नाही D.None of these D.ان مے سے کوئی نھی
196	उत्तेजक प्रसंगामध्ये जीवाने दिलेल्या प्रतिक्रियांच्या रचना ज्या संतुलनाला बिघवतात त्याला म्हणतात..... Pattern of responses an organism makes to the stimulus event that disturbs the equilibrium is known as ردعمل کا نمونہ ایک عضو تناسل پر محرک واقعہ بناتا ہے جسے مساوات کو ضائع کر دیتی ہے
	A.ताण A.Stress A.کشیدگی
	B.मानसिक ताण B.Strain B.کشیدگی
	C.चिंता C.Anxiety C.بے چینی

For More Info And Videos About TAIT-Exam Syllabus And Other Exam Visit My Channel
TAIT च्या 30 प्रश्नपत्रिका PDF
BADSHAHimp Available Request 9765226781
WWW.YouTube.com/BADSHAHimp
Subscribe My Channel

D.निराशा
D.Frustration
D.مایوسی

Answer: A.ताण
A.Stress
A.کشیدگی

197 हायड्रोजनचा कोणता समसंयुग न्युक्लियर विखंडनामध्ये क्रियाधानीमध्ये इंधन म्हणून वापरला जातो?

Which isotope of hydrogen is being used as a fuel in nuclear fission reactors?

ہائدروجن کا کونسا آئسوٹوپ نیوکلیئر فیشن ریکٹر میں ایک ایندھن کے طور پر استعمال کیا جا رہا ہے؟

A.प्रोटियम
A.Protium
A.پروٹیم

B.ड्युटेरियम
B.Deuterium
B.ڈیوٹیریم

C.ट्रायटीयम
C.Tritium
C.ٹریٹیم

D.वरीलपैकी सर्व
D.All the above
D.ان میں سے سبھی

Answer: B.ड्युटेरियम
B.Deuterium
B.ڈیوٹیریم

198 Out of the given options which best expresses the meaning of the given Proverb?
Rome wasn’t built in a day.

A.You cannot expect to do important things in a short period of time

B.Everything can be done or accomplished within a very short span of time

C.Rome which is one of the most beautiful cities of the world, was built in just twenty four hours

D.It just takes twenty four hours to reach any beautiful city like Rome

Answer: A.You cannot expect to do important things in a short period of time

199 सूचना: या प्रत्येक प्रश्नांमध्ये तुम्हाला A आणि B अशी दोन विधाने दिलेली आहे आणि (I) आणि (II) असे दोन निष्कर्ष दिलेले आहेत. सामान्यपणे माहीत असलेल्या तथ्यांशी जुळत नसले तरी खालील दोन विधाने बरोबर आहेत असे समजा. खालीलपैकी कोणते निष्कर्ष दिलेल्या वाक्यांना संपूर्णपणे लागू आहे ते ठरवा.
निवेदन:
A: काही राजे राण्या आहेत.
B: सगळ्यात राण्या सुंदर आहेत.
निष्कर्ष:
I: सगळेत राजे सुंदर आहेत.
II: सर्व राण्या राजे आहेत.

DIRECTION: In each of these questions, you are given two statements A and B followed by two conclusions (I) and (II). You have to take the two statements to be true even if they seem to be at variance from commonly known facts. You are to decide which of the given conclusions definitely follows from the given statements.

Statements:
A: Some kings are queens.
B: All queens are beautiful.

Conclusions:
I: All kings are beautiful.
II: All queens are kings.

ہدایت:ان سوالوں میں سے ہر ایک میں، آپ کو دو بیانات A اور B دیے گئے ہیں جن کے بعد دو نتائج (I) اور (II) دیے گئے ہیں۔ آپ کو دونوں بیانات کو درست تسلیم کرنا ہے اگرچہ وہ عام طور پر معلوم حقائق کے برعکس نظر آتے ہوں۔ آپ کو فیصلہ کرنا ہے کہ دیے گئے نتائج میں سے کون یقینی طور پر دیے گئے بیانات کی پیروی کرتا ہے۔

بیانات:
A: کچھ راجے رانیاں ہیں۔
B: تمام رانیاں خوبصورت ہیں۔

حل:
I: تمام راجے خوبصورت ہیں۔
II. تمام رانیاں راجے ہیں۔

A.जर केवळ निष्कर्ष I निघत असल्यास.
A.If only conclusion I follows
A.صرف نتیجہ I پیروی کرتا ہے۔

B.जर केवळ निष्कर्ष II निघत असल्यास.
B.If only conclusion II follows
B.صرف نتیجہ II پیروی کرتا ہے۔

For More Info And Videos About TAIT-Exam Syllabus And Other Exam Visit My Channel
TAIT च्या 30 प्रश्नपत्रिका PDF
BADSHAHimp Available Request 9765226781
YouTube WWW.YouTube.com/BADSHAHimp
Subscribe My Channel

C.जर दोन्ही निष्कर्ष I आणि II निघत असल्यास.
C.If both I and II follow
C.دونوں I اور II پیروی کرتے ہیں۔

D.जर दोन्ही निष्कर्ष I आणि II निघत नसल्यास.
D.If neither I nor II follows
D.نہ تو I نہ ہی II پیروی کرتا ہے۔

Answer: D.जर दोन्ही निष्कर्ष I आणि II निघत नसल्यास.
D.If neither I nor II follows
D.نہ تو I نہ ہی II پیروی کرتا ہے۔

200 निर्देश: खालील प्रत्येक वर्ण मालिके मध्ये, काही अक्षरे गहाळ आहेत, जे खाली दिलेल्या पर्यायां मध्ये एका क्रमाने दिलेली आहेत. योग्य पर्याय निवडा.

bc - b - c - b - ccb

DIRECTION: In each of the following letter series, some of the letters are missing, which are given in that order as one of the alternatives below it. Choose the correct alternative.

bc - b - c - b - ccb

ہدایت نیچے دے حرف کے سرج مے کچھ حرف گمشدہ ہے نیچے دے گئے اختیارات سے سسہی اختیار چنے

bc - b - c - b - ccb

A.cbcb
A.cbcb
A.cbcb

B.bbcb
B.bbcb
B.bbcb

C.cbbc
C.cbbc
C.cbbc

D.bccc
D.bccc
D.bccc

Answer: A.cbcb
A.cbcb
A.cbcb

For More Info And Videos About TAIT-Exam Syllabus And Other Exam Visit My Channel
TAIT च्या 30 प्रश्नपत्रिका PDF
BADSHAHimp Available Request 9765226781
WWW.YouTube.com/BADSHAHimp
Subscribe My Channel

For More Info And Videos About TAIT-Exam Syllabus And Other Exam Visit My Channel
TAIT च्या 30 प्रश्नपत्रिका PDF
BADSHAHimp Available Request 9765226781
WWW.YouTube.com/BADSHAHimp
Subscribe My Channel

Question Paper Title : TAIT_PAPER_15

Date of Exam : 2017-12-19 09:00:00.0

1	पुढील म्हण पूर्ण करा - ‘ आधी पोटोबा ----------’
	A.मग शतपावली
	B.मग विश्रांती
	C.मग विठोबा
	D.मग बाकी सर्व
Answer:	C.मग विठोबा

2	‘ प्रत्येक ’ या शब्दाची संधी सोडवा.
	A.प्रत + एक
	B.प्रती + एक
	C.प्रति + एक
	D.प्रत्यय + एक
Answer:	C.प्रति + एक

3	शिक्षण उपक्रमाचे महत्त्व आहे The significance of teaching activities is that— تعلیم کی سرگرمیوں کی اہمیت یہ ہے—
	A.शिक्षकाने वर्गातील आणि त्याबाहेरचे सर्व उपयुक्त मार्गदर्शन मिळवावे A.The teacher gets all desirable guidance within the classroom and out of it A.اساتذہ کلاس روم کے اندر اور باہر سے تمام مطلوبہ ہدایت حاصل کرتا ہے
	B.शिक्षक शिकून शिकवण्याची पद्धत समाकलित करतात B.The teacher integrate the process of teaching with that of learning B.استاد تدریس کے عمل کے ساتھ سیکھنے کو یکجا کرتا ہے

For More Info And Videos About TAIT-Exam Syllabus And Other Exam Visit My Channel
BADSHAHimp TAIT च्या 30 प्रश्नपत्रिका PDF Available Request 9765226781 WWW.YouTube.com/BADSHAHimp Subscribe My Channel

C.शिक्षक स्मृती स्तरावर प्रतिबिंबित करण्याच्या पातळीवर प्रभावी प्रक्रिया करतात
C.The teacher makes effective the process of from memory level to reflective level
C.استاد یاداشت کی سطح سے عکاسی کی سطح تک عمل کو مؤثر بنا دیتا ہے

D.वरील सर्व
D.All the above
D.مذکورہ تمام

Answer: D.वरील सर्व
D.All the above
D.مذکورہ تمام

4 'विषम' या शब्दाचा विरुद्धार्थी शब्द कोणता ?

A.व्यस्त

B.प्रतिकूल

C.समान

D.विरुद्ध

Answer: C.समान

5 रॅमन मॅगसेसे पुरस्कार _____या क्षेत्रामध्ये दिला जातो

Ramon Magsaysay Award is given in the field of -

ریمن میگاسے سے انعام دیا جاتا ہے:

A.साहित्य
A.Literature
A.ادب میں

B.सामाजिक सक्रियता
B.Social Activism
B.رفاہی کام کے لئے

C.खेळ
C.Sports
C.کھیل کودکے میدان میں

D.चित्रपट
D.Movies
D.فلم کے میدان میں

For More Info And Videos About TAIT-Exam Syllabus And Other Exam Visit My Channel
TAIT च्या 30 प्रश्नपत्रिका PDF
BADSHAHimp Available Request 9765226781
WWW.YouTube.com/BADSHAHimp
Subscribe My Channel

Answer:	B.सामाजिक सक्रियता B.Social Activism B.رفاہی کام کے لئے

6	सूचना: दिलेल्या पर्यायांमधून वेगळे ते बाहेर काढा. DIRECTIONS: Find the odd one out from the given alternatives. سمت: دیے گئے متبادل میں سے بے جوڑ کو تلاش کرو۔
	A.FIJL A.FIJL A.FIJL
	B.RUVX B.RUVX B.RUVX
	C.GHJK C.GHJK C.GHJK
	D.MPQS D.MPQS D.MPQS
Answer:	C.GHJK C.GHJK C.GHJK

7	DIRECTIONS: A sentence with an underlined phrasal verb is given below. Out of the four options, choose the one which can be substituted for the given phrasal Verb. He doesn't have to worry because there are people to back him up financially.
	A.support
	B.drag
	C.withdraw
	D.criticize
Answer:	A.support

For More Info And Videos About TAIT-Exam Syllabus And Other Exam Visit My Channel
TAIT च्या 30 प्रश्नपत्रिका PDF
BADSHAHimp Available Request 9765226781
WWW.YouTube.com/BADSHAHimp
Subscribe My Channel

8	बांग्लादेशला स्वातंत्र्याच्या आधी काय म्हटले जात असे_____ Bangladesh before it's independence was called - بنگلہ دیش کا نام اس کی آزادی سے پہلے تھا :
	A.पश्चिम पाकिस्तान A.West Pakistan A.مغربی پاکستان
	B.उत्तर पाकिस्तान B.North Pakistan B.شمالی پاکستان
	C.दक्षिण पाकिस्तान C.South Pakistan C.جنوبی پاکستان
	D.पूर्व पाकिस्तान D.East Pakistan D.مشرقی پاکستان
Answer:	D.पूर्व पाकिस्तान D.East Pakistan D.مشرقی پاکستان

For More Info And Videos About TAIT-Exam Syllabus And Other Exam Visit My Channel
TAIT च्या 30 प्रश्नपत्रिका PDF
BADSHAHimp Available Request 9765226781
WWW.YouTube.com/BADSHAHimp
Subscribe My Channel

9 सूचना: प्रत्येक प्रश्नाला एक प्रमुख विधानासोबत चार विधाने आहेत ज्यांच्याखाली A, B, C, आणि D असे चार विधान आहेत. क्रमवार विधानांची जोडी निवडा ज्यामध्ये प्रथम विधान दुसऱ्या विधानाला सुचवते, आणि दोन्ही विधाने तर्किकदृष्ट्या प्रमुख विधानासोबत निगडित असेल.

. हा फोन एकतर अँड्रॉइड आहे किंवा आयओएस वर आधारित आहे.
A. हा फोन अँड्रॉइड वर आधारित आहे.
B. हा फोन अँड्रॉइड वर आधारित नाही.
C. हा फोन आयओएस वर आधारित आहे.
D. हा फोन आयओएस वर आधारित नाही.

DIRECTIONS: Each question has a main statement followed by four statements labelled A, B, C and D. Choose the ordered pair of statements, where the first statement implies the second, and the two statements are logically consistent with the main statement.

This phone is based on either android or IOS
A. This phone is based on android
B. This phone is not based on android
C. This phone is based on IOS
D. This phone is not based on IOS

ہدایت: ہر سوال میں ایک جملہ ہے جسکے بعد چار جملےاے، بی،سی اور ڈی کے نام سے دئے گئے ہیں اسمیں منسلک جوڑیوں کو چنئے۔ جہاں پہلا جملہ دوسرے جملہ کی اور اشارہ کر رہا ہے اور دو جملے منطقی مرکزی بیان کے مطابق ہیں

یہ فون یا اینڈرائڈ ہے یا آئی او ایس
A۔ یہ اینڈرائڈ فون ہے
B۔ یہ اینڈرائڈ فون نہیں ہے
C۔ یہ فون آئی او ایس ہے
D۔ یہ فون آئی او ایس نہیں ہے

A.AD
A.AD
A.AD

B.DA
B.DA
B.DA

C.CA
C.CA
C.CA

D.AB
D.AB
D.AB

Answer: B.DA
B.DA
B.DA

10 मानसिक वय आणि कालक्रमवार वय यातील संबंधांचे गुणोत्तर म्हणून _____.

_____ as the ratio of relationship between mental age and chronological age.

_____ دماغی عمر اور تاریخ وار عمر کے مابین تعلق کے تناسب کے بطور استعمال ہوتا ہے

A.विकास भागफल
A.Development Quotient
A.نشو نما حاصل قسمت

B.बुद्धिमत्ता शोध
B.Intelligence quest
B.ذہانت کی جستجو

C.बुद्धिमत्ता भागफल
C.Intelligence Quotient
C.ذہانت حاصل قسمت

D.बुद्धिमत्ता गुणोत्त्र
D.Intelligence ratio
D.ذہانت تناسب

Answer: C.बुद्धिमत्ता भागफल
C.Intelligence Quotient
C.ذہانت حاصل قسمت

11 रकमेवर 5 वर्षांसाठी सरळ व्याज हे त्या रकमेच्या एक चतुर्थांश आहे. तर प्रति वर्ष व्याज दर काय आहे:

The simple interest on a sum for 5 years is one fourth of the sum. The rate of interest per annum is.

ایک مخصوص مبلغ پر پانچ سالوں کے لیئے سود مفرد مبلغ کا ایک چوتھائی ہے۔ سالانہ منافہ کا در ہے

A.5%
A.5%
A.5%

B.6%
B.6%
B.6%

C.4%
C.4%
C.4%

For More Info And Videos About TAIT-Exam Syllabus And Other Exam Visit My Channel
TAIT च्या 30 प्रश्नपत्रिका PDF
BADSHAHimp Available Request 9765226781
WWW.YouTube.com/BADSHAHimp
Subscribe My Channel

D.8%
D.8%
D.8%

Answer: A.5%
A.5%
A.5%

12 _____ बुद्धिमत्ता ही स्वयं जागरूकता आहे

_____ intelligence is self awareness

_____ ذہانت خود آگہی ہے

A.आंतर वैयक्तिक
A.intrapersonal
A.انٹراپرسنل

B.आंतर वैयक्तिक
B.interpersonal
B.انٹرپرسنل

C.अवकाशासंबंधी
C.spatial
C.مکانی قابلیت

D.शारीरिक किमयात्मक
D.bodily kinesthetic
D.جسمانی عضلاتی حس

Answer: A.आंतर वैयक्तिक
A.intrapersonal
A.انٹراپرسنل

13 आवर्धन इतरांच्या उपस्थितीमध्ये असलेले वर्तन आहे

Augmentation is behavior in presence of others

افزائش ایک ایسا رویہ ہے جو دیگر_____ کی وجہ سے جنم لیتا ہے۔

A.छाप
A.Impression
A.نقوش

For More Info And Videos About TAIT-Exam Syllabus And Other Exam Visit My Channel
TAIT च्या 30 प्रश्नपत्रिका PDF
BADSHAHimp Available Request 9765226781
WWW.YouTube.com/BADSHAHimp
Subscribe My Channel

B.आकलन
B.Cognition
B.ادراک واحساس

C.सामाजिक सुलभीकरण
C.Social facilitation
C.سماجی تسہیلات

D.अनुकरण
D.Imitation
D.چربہ زنی، نقالی

Answer: C.सामाजिक सुलभीकरण
C.Social facilitation
C.سماجی تسہیلات

14 सरळ रूप द्या:
863489 – 432108 = ?

Simplify:
863489 – 432108 = ?

سادہ بنائے:
863489 – 432108 = ?

A.431481
A.431481
A.431481

B.421481
B.421481
B.421481

C.431381
C.431381
C.431381

D.432481
D.432481
D.432481

Answer: C.431381
C.431381
C.431381

For More Info And Videos About TAIT-Exam Syllabus And Other Exam Visit My Channel
TAIT च्या 30 प्रश्नपत्रिका PDF Available Request 9765226781
BADSHAHimp
WWW.YouTube.com/BADSHAHimp
Subscribe My Channel

15	फक्त अदिश राशी निवडा: Pick out the only scalar quantity: صرف غیر سمتی مقدار کو چنیں:
	A.ऊर्जा A.Power A.بجلی
	B.विद्युत क्षेत्र B.Electric Field B.الیکٹرک فیلڈ
	C.चुंबकीय संवेग C.Magnetic Momentum C.میگنیٹک مومینٹم
	D.सरासरी गती D.Average Velocity D.اوسط رفتار
Answer:	A.ऊर्जा A.Power A.بجلی
16	Fill in the blank with the correct article. She's been making constant attempts to learn _____trumpet.
	A.the
	B.a
	C.an
	D.No article required
Answer:	A.the
17	शिक्षकाने वर्गात आकृत्या वापरणे आवश्यक आहे A teacher should use the diagrams in the class— ایک استاد کو کلاس میں شکلوں کا استعمال کرنا چاہئے—

A.आवश्यकतेनुसार आकर्षण वाढविण्यासाठी
A.On compulsorily basis in order to enhance of the attraction
A.جذباتی بنیاد پر توجہ کے لئے بڑھانے کے لئے

B.कधीकधी त्यामुळे विद्यार्थ्यांच्या प्रेरणा टिकून राहतात
B.Occasionally so that the motivation of the students may persist
B.کبھی کبھار اس لئے کہ طالب علموں کی حوصلہ افزائی برقرار رہے

C.जेव्हा आवश्यक असेल तेव्हाच आणि जे विषया साठी योग्य असेल
C.Only whenever required and befitting the content
C.صرف جب ضروری ہو اور مواد

D.ज्या वेळी शिक्षकांना आकृती वापरून शिकविण्याची स्वत: ची इच्छा असते
D.Whenever the teacher has his own will to teach through diagrams
D.جب بھی اساتذہ کو گراف کے ذریعے تدریس کی اپنی مرضی ہو

Answer: C.जेव्हा आवश्यक असेल तेव्हाच आणि जे विषया साठी योग्य असेल
C.Only whenever required and befitting the content
C.صرف جب ضروری ہو اور مواد

18 खालीलपैकी शुद्ध शब्द कोणता ?

A.अनुकृमणिका

B.अनूक्रमणिका

C.अनुक्रमणीका

D.अनुक्रमणिका

Answer: D.अनुक्रमणिका

19 खालीलपैकी कोणते राज्य सर्वात जास्त प्रमाणात जंगली भूभागाने अच्छादलेले आहे?

Which of the following state has the highest percentage of forest cover?

مندرجہ ذیل میں سے کونسی ریاست میں جنگل کا احاطہ کے سب سے زیادہ تناسب کا حامل ہے؟

A.जम्मू आणि काश्मिर
A.Jammu and Kashmir
A. جموں و کشمیر

B.हरियाणा
B.Haryana
B. ہریانہ

C.मिझोराम
C.Mizoram
C. میزورم

D.आसाम
D.Assam
D. آسام

Answer: C.मिझोराम
C.Mizoram
C. میزورم

20 मनोविश्लेषणाची संकल्पना यांचेद्वारे मांडण्यात आली

Psycho analysis was introduced by

سائیکو کا تجزیہ کس نے متعارف کرایا تھا

A.फ्रॉईड
A.Freud
A.فریوڈ

B.श्नायडर
B.Schneider
B.شنیڈر

C.डेल व डेनिकेर
C.Dale & Deniker
C.ڈیل اور ڈینیکر

D.ब्लूअर
D.Bluer
D.بلیور

Answer: A.फ्रॉईड
A.Freud
A.فریوڈ

21 P आपल्या घराकडून पश्चिमेकडे निघाला. 35 मी. अंतर चालत गेल्यावर तो उजवीकडे वळला आणि 15 मी.चालला. नंतर तो पुन्हा उजवीकडे वळला आणि 20 मी. चालला. यानंतर तो उजवीकडे 135° वळला आणि 30 मी अंतर कापले. त्याने कोणत्या दिशेस जायला हवे?

P started from his house towards west. After walking a distance of 35 m, he turned to the right and walked 15 m. He then again turned to the right and walked 20 m. After this he is to turn right at 135° and to cover 30 m. In which direction is he ?

P نے اپنے گھر سے مغرب کی طرف چلنا شروع کیا-35 میٹر کا فاصلہطے کرنے کے بعد وہ داہنی جانب مڑتا ہے اور 15 میٹر تک چلتا ہے- وہ دوبارہ داہنی جانب مڑتا ہے اور 20 میٹر چلتا ہے- اسکے بعد وہ 135 ڈگری میں مڑتے ہوئے30 میٹر تک چلنا ہے- تو اسے کس سمت میں چلنا چاہیے؟

A.दक्षिण
A.South
A.جنوب

B.दक्षिण पश्चिम
B.South West
B.جنوب مغرب

C.पश्चिम
C.West
C.مغرب

D.दक्षिण पूर्व
D.South East
D.جنوب مشرق

Answer: B.दक्षिण पश्चिम
B.South West
B.جنوب مغرب

22 Out of the given options, choose the most appropriate one to fill in the blank.
Scooby _____all the biscuits

A.has eaten

B.have eat

C.have ate

D.has eat

Answer: A.has eaten

23 जोॲन गुडमन लोकांचे वय वाढते तशी त्यांची स्मृती कशी बदलते याचा अभ्यास करतो. ती बहुधा _____ मानसशास्त्रज्ञ आहे

Joan Goodman studying how memory changes as people get older. She is most likely a _____ psychologist

جان گُڈمین مطالعہ کر رہے ہیں کہ جیسے جیسے انسان عمر دراز ہوتا جاتا ہے ذہن میں میں بدلاو آتا ہے۔ زیادہ امکان یہ ہے کہ وہ ایک_____ ماہرنفسیات ہے

A.सामाजिक
A.social
A.سماجی

B.संज्ञानात्मक
B.cognitive
B.ادراک

C.विकासात्मक
C.developmental
C.ترقیاتی

D.प्रायोगिक
D.experimental
D.تجرباتی

Answer: C.विकासात्मक
C.developmental
C.ترقیاتی

24 सूचना: अर्थपूर्ण परिच्छेद निर्माण करण्यासाठी, खाली दिलेली (P), (Q) (R), (S) आणि (T) ही पाच वाक्ये योग्य अनुक्रमाने पुनर्रचना करा; त्यांनतर खालील प्रश्नांची उत्तर द्या.
P. गाढ झोपलेला ससा जागा झाला आणि हळूहळू चालणाऱ्या कासवाने शर्यतीत हरविल्याचा त्याला मोठा धक्का बसला.
Q. ससा लवकरच कंटाळला आणि कासव पोहचेपर्यंत पुष्कळ वेळ आहे, असा विचार करून सशाने विश्रांती घ्यायचे ठरविले.
R. अति आत्मविश्वास असणारा ससा आव्हान स्वीकारतो आणि शर्यत सुरु झाल्याबरोबर खूप वेगाने धावतो.
S. दरम्यान, अंतिम रेषेपर्यंत पोहचत नाही तोपर्यंत कासव हळूहळू चालत राहते.
T. ससा वेगाने धावण्याच्या फुशारक्या मारत असल्याने कासवाने त्याला शर्यत लावण्याचे आव्हान दिले.

पुनर्रचना केल्यानंतर खालीलपैकी कोणते वाक्य चौथे असेल?

DIRECTION: Rearrange the following five sentences (P), (Q), (R), (S) and (T) in the proper sequence to form a meaningful paragraph; then answer the questions given below them.
P. The overslept hare wakes up, only to be shocked that a slow moving tortoise beat it in the race.
Q. Soon it gets tired and decides to rest, thinking that there's plenty of time to relax before tortoise can catch up with it.
R. The overconfident hare accepts the challenge and runs as fast as it can after the race begins.
S. Meanwhile, the tortoise continues to walk slowly, until it reaches the finish line.
T. Tired of the bragging of a speedy hare, a tortoise challenges it to a race.

Which of the following should be the FOURTH sentence after rearrangement?

ہدایات: ان پانچ جملوں (P)، (Q)، (R)، (S) اور (T) کو با معنی پیرا بنانے کے لئے دوبارہ ترتیب دیجئے، پھر نیچے دے گئے سوالوں کے جواب دیجئے

P. دیر تک سونے والا خرگوش جاگ گیا، خالی حیران ہونے کے لئے کی دھیرے چلنے والے کچھوے نے اسے دھوڈ میں ہرا دیا.
Q. جلدی وو تھک گیا اور آرام کرنے کہ ارادہ کیا، یہ سونچ کر کی ابھی آرام کرنے کے لئے بہت وقت ہے اسے پہلے کہ کچھوا اس تک پہنچ جاےگا.
R. ضرورت سے زیادہ بھروسا رکھنے والے خرگوش نے مقابلہ کی دعوت تسلیم کی اور دھوڈ شرو ہونے سے ہی تیز بھاگ گیا.
S. جبکہ ، کچھوا دھیرے چلنے لگا، جب تک وو منزل تک پہنچ گیا.
T. تیز چلنے والے خرگوش کی رفتار سے تنگ آکر، کچھوے نے اسے دھوڈ لگانے کی دعوت دی.

دوبارہ ترییب دینے کے بعد کون سا جملہ چوتھا ہونا چاہیے؟

A.S
A.S
A.S

B.P
B.P
B.P

C.Q
C.Q
C.Q

D.T
D.T
D.T

Answer: A.S
A.S
A.S

25 प्रकल्पातील शिक्षकांची भूमिका

The role of a teacher in Project is—

پروجیکٹ میں ایک استاد کا کردار ہے—

A.एका मित्राप्रमाणे
A.Like a friend
A.دوست کی طرح

B.मार्गदर्शक सारखे
B.Like a guide
B.ایک رہنما کی طرح

C.एका सहकर्मीप्रमाणे
C.Like a co-worker
C.ایک شریک کارکن کی طرح

D.वरील सर्व
D.All the above
D.مذکورہ تمام

Answer: D.वरील सर्व
D.All the above
D.مذکورہ تمام

26 स्टॅनफोर्ड बेनेट चाचणी उर्दु आणि पंजाबीमध्ये यांच्याद्वारे आली

Stanford Benet test in Urdu & Punjabi by

اردو اور پنجابی میں اسٹن فورڈ بنٹ ٹسٹ انجام پایا بذریعہ

A.सि.एच.राईस
A.C.H. Rice
A.سی۔ایچ۔ رائس

B.एम.सी. जोशी
B.M.C. Joshi
B.ایم۔سی۔جوشی

C.एस.एम. मोहसीन
C.S.M. Mohsin
C.ایس۔ایم۔مُحسن

D.लाँग आणि मेहता
D.Long & Mehta
D.لانگ اور مہتا

Answer: A.सि.एच.राईस
A.C.H. Rice
A.سی۔ایچ۔ رائس

27 सूचना: खालील प्रश्नांमध्ये दिलेल्या पर्यायांमधून संबंधित अक्षर समूह निवडा.

MVFG : PSHE :: IPBY : ?

DIRECTIONS: In the following question, select the related group of letters from the given alternatives.

MVFG : PSHE :: IPBY : ?

سمت: مندرجہ ذیل سوال میں، دیے گئے متبادل میں سے حروف کا متعلقہ گروپ منتخب کریں۔

MVFG : PSHE :: IPBY : ?

A.LMDV
A.LMDV
A.LMDV

B.LMDW
B.LMDW
B.LMDW

C.LMDX
C.LMDX
C.LMDX

D.LMCW
D.LMCW
D.LMCW

Answer: B.LMDW
B.LMDW
B.LMDW

28 भारताचे इलेक्ट्रॉनिक्स आणि माहिती तंत्रज्ञान मंत्री कोण आहेत?

Who is the Minister of Electronics & Information Technology of India?

انڈیا کا الیکٹرانکس اور آئی ٹی کے منسٹر ہیں :

A.रवी शंकर प्रसाद
A.Ravi Shankar Prasad
A.روی شنکر پرساد

B.राधा मोहन सिंह
B.Radha Mohan Singh
B.رادھا موہن سنگھ

C.जगत प्रकाश नड्डा
C.Jagat Prakash Nadda
C.جگت پرکاش نادڈا

D.नरेद्र सिंह तोमर
D.Narendra Singh Tomar
D.نریندرا سنگھ تومر

Answer: A.रवी शंकर प्रसाद
A.Ravi Shankar Prasad
A.روی شنکر پرساد

29 खालील प्रश्नात एक उघडलेला फासा दाखविला आहे आणि उत्तराचे पर्याय म्हणून चार पूर्ण फासे दाखविले आहेत. उघडलेला फासा परत बंद केल्यानंतर कुठचा फासा तयार होईल तो योग्य पर्याय निवडा.

DIRECTIONS: In question given below, an unfolded dice is given while four answer choices are given in the form of complete dices. Select the correct answer which is formed by folding the unfolded dice.

نیچے دیے گئے سوال میں، ایک بغیر فولڈ کیا ہوا پاسہ دیا گیا ہے جبکہ اختیاری جوابات چار دیے گئے ہیں، ایک مکمل پاسہ کی شکل صحیح جواب کو چنئے جو اس بغیر فولڈ کئے ہوئے پاسہ کو فولڈ کرنے سے ملے گا؟

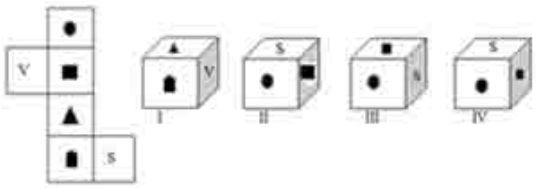

A. II

B. II & III

C. I, II & III

D. I, II, III & IV

Answer: A. II

30 दिलेल्या आकृत्यां मधील गहाळ संख्या शोधा :

Find the missing number in the given figures:

نیچے کے رجاناؤں مے گمنام نمبر کھوجے :

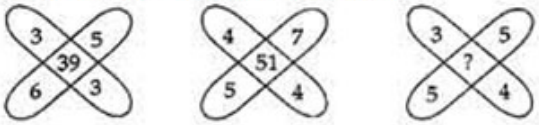

A. 35

B. 37

C. 45

D. 47

Answer: B. 37

31 $\frac{(8)^3-(7)^3}{(8)^2+(8)(7)+(7)^2}=?$

A. 10

B. 9

C. 5

D. 1

Answer: D. 1

32 'कुचाळी' या शब्दाचा समानार्थी शब्द कोणता ?

A.वखाणणी

B.स्तुती

C.कुचेष्टा

D.प्रशंसा

Answer: C.कुचेष्टा

33 **सूचना:** दिलेल्या पर्यायांमधून श्रेणी पूर्ण करणारी योग्य आकृती निवडा.

DIRECTIONS: Complete the series by choosing right figure from the given choices.

ہدایات: دیئے گئے اختیارات میں صحیح شکل کا انتخاب کر کے سیریز کو مکمل کیجیئے۔

Question Figure

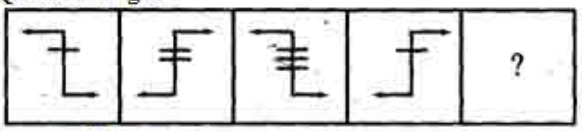

Answer Figures



A. (A)

B. (B)

C. (C)

D. (D)

Answer: C. (C)

34 सूचना: प्रत्येक प्रश्नाला एक प्रमुख विधानासोबत चार विधाने आहेत ज्यांच्याखाली A, B, C, आणि D असे चार विधान आहेत. क्रमवार विधानांची जोडी निवडा ज्यामध्ये प्रथम विधान दुसऱ्या विधानाला सुचवते, आणि दोन्ही विधाने तर्किकदृष्ट्या प्रमुख विधानासोबत निगडित असेल.

जर मी वेळेवर माझे गृहपाठ केले, तर मला त्याचे गुण मिळतील.
A. मी वेळेवर माझे गृहपाठ केले
B. मी वेळेवर माझे गृहपाठ केले नाही
C. मला त्याचे परिणाम मिळाले
D. मला त्याचे परिणाम मिळाले नाही

DIRECTIONS: Each question has a main statement followed by four statements labelled A, B, C and D. Choose the ordered pair of statements, where the first statement implies the second, and the two statements are logically consistent with the main statement.

If I do my homework on time , I will be treated well .
A. I did my homework on time
B. I did not do my homework on time
C. I was treated well
D. I was not be treated well

ہدایت: ہر سوال میں ایک جملہ ہے جسکے بعد چار جملےاے، بی،سی اور ڈی کے نام سے دئے گئے ہیں اسمیں منسلک جوڑیوں کو چنئے۔ جہاں پہلا جملہ دوسرے جملہ کی اور اشارہ کر رہا ہے اور دو جملے منطقی مرکزی بیان کے مطابق ہیں

میں اپنا ہوم ورک وقت پر کروں تو مجھے انعام ملے گا۔
Aمیں نے اپنا ہوم ورک وقت پر کیا ۔
Bمیں نے اپنا ہوم ورک وقت پر نہیں کیا ۔
Cمجھے انعام ملا ۔
Dمجھے انعام نہیں ملا ۔

A.AC
A.AC
A.AC

B.BC
B.BC
B.BC

C.DA
C.DA
C.DA

D.CD
D.CD
D.CD

Answer: A.AC
A.AC
A.AC

35	Out of the given options which best expresses the meaning of the given Proverb? Cry over spilt milk.
	A.To be happy and satisfied about whatever has been done
	B.To shout after drinking all the milk
	C.To be sad because all your milk has turned sour
	D.To be unhappy about what cannot be undone
Answer:	D.To be unhappy about what cannot be undone

36	हेलसिंकी ही _____ची राजधानी आहे Helsinki is the capital of- ہیلسنکی راجدھانی ہے:
	A.इथिओपिया A.Ethiopia A.ایتھوپیا
	B.फिनलँड B.Finland B.فِن لینڈ
	C.जीबौटी C.Djibouti C.جیبوتی
	D.जॉर्जिया D.Georgia D.جارجیا
Answer:	B.फिनलँड B.Finland B.فِن لینڈ

37	खालीलपैकी अशुद्ध शब्द कोणता ?
	A.झोंबणे

B.झोंबाट

C.टकेटोनपे

D.टचटचीत

Answer: C.टकेटोनपे

38 आकाशामध्ये विज चमकते जेव्हा दोन ढग

Lightening occurs in the sky when two clouds

آسمان میں بجلی چمکتی ہے، جب دو بادل

A.एकमेकांसोबत टक्कर करतात
A.Collide with each other
A.ایک دوسرے سے ٹکراتے ہیں

B.एकमेकावर पडतात
B.Overlap each other
B.ایک دوسرے پر چڑھ جاتے ہیں

C.एकत्र येतात
C.Outburst together
C.ایک دوسرے سےٹکرا جاتے ہیں

D.विद्युयत उर्जेची देवाणघेवाण करतात
D.Exchange the electric charge
D.جب وہ الیکٹرک چارج کو ایک دوسرے سے بدل تے ہیں

Answer: D.विद्युयत उर्जेची देवाणघेवाण करतात
D.Exchange the electric charge
D.جب وہ الیکٹرک چارج کو ایک دوسرے سے بدل تے ہیں

39 * चिन्ह बदलण्यासाठी आणि दिलेल्या समीकरण समतोल करण्यासाठी गणिती चिन्हांचे अचूक संयोजन निवडा:

Select the correct combination of mathematical signs to replace * signs and balance the given equation:

صحیح میل کھاتی ریاضی کی علامتوں کو چنئے * کی جگہ بدلنے کے لئے اور دیئے گئے مساوات کو معتدل کیجئے :

6 * 15 * 10 * 3 * 12

A. ÷ + = ×

B. + ÷ × =

C. × ÷ + =

D. + – = ÷

Answer: C. × ÷ + =

40 सूचना: खालील प्रश्नांमध्ये दिलेल्या पर्यायांमधून संबंधित अक्षर/शब्द/संख्या निवडा.

कुत्रा : कुत्र्याचे पिल्लू ::

DIRECTIONS: In the following question, select the related letter/word/number from the given alternatives.

Dog : Puppy::

سمت: مندرجہ ذیل سوال میں، دیے گئے متبادل سے متعلقہ حرف/لفظ/نمبر منتخب کریں۔

کتا : پلا ::

A.सिंह : कब
A.Lion : Cub
A.شیر : شیر کا بچہ

B.बछडा : गाय
B.Calf : Cow
B.بچھڑا : گائے

C.बैल : गाय
C.Bull : Cow
C.بیل : گائے

D.मुलगा : पुरुष
D.Boy : Man
D.لڑکا : آدمی

Answer: A.सिंह : कब
A.Lion : Cub
A.شیر : شیر کا بچہ

41 जर घड्याळामध्ये 08:52 वाजले असतील, तर पाण्यामध्ये काय वेळ दिसेल?

If time in a clock is 8:52, then at what time will appear in water?

اگر گھڑی میں وقت 8:52 ہوا ہو تو پانی میں وقت کیا دکھائی دے گا۔

A.8:38
A.8:38
A.8:38

B.9:52
B.9:52
B.9:52

C.8:22
C.8:22
C.8:22

D.9:38
D.9:38
D.9:38

Answer: D.9:38
D.9:38
D.9:38

42 **सूचना:** दिलेल्या चारांपैकी वेगळी (असंबद्ध) असणारी आकृती शोधून काढा.

DIRECTIONS: Find the odd from the given four figures.

ہدایات: دیئے گئے چار شکلوں میں سے طاق شکل کونسی ہے؟

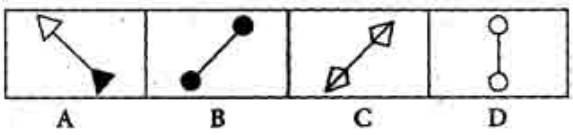

A. (A)

B. (B)

C. (C)

D. (D)

Answer: A. (A)

43	मध्यरात्रीच्या 12 पूर्वीचे 2 तास म्हणजे : 2 hours before 12 midnight is: 12 سے پہلے ہے 2 گھنٹہ نصف شب:
	A.रात्रीचे 11 A.11:00 PM A.11:00 PM
	B.रात्रीचे 10 B.10 pm B.10 pm
	C.रात्रीचे 12 C.12:00 PM C.12:00 PM
	D.रात्रीचे 9 D.9:00 PM D.9:00 PM
Answer:	B.रात्रीचे 10 B.10 pm B.10 pm
44	निर्देश: खालीदिलेल्या अक्षराच्या क्रमात काही अक्षरे गहाळ केली आहेत ते त्या क्रमाने खाली दिलेल्या पर्यायांपैकी एक आहे aa _ bcb _abccc _bca _abc DIRECTIONS: In each of the following letter series, same of the letters are missing which are given in that order as one of the alternatives below it. aa _ bcb _abccc _bca _abc دایت جیل کے حرف سرج میں کوئی حرف گمشدہ ہے آپکو انکی شناخت جیل کے اختیارات سے کرنی ہے aa _ bcb _abccc _bca _abc
	A.abaa A.abaa A.abaa
	B.aabb B.aabb B.aabb

C.abab
C.abab
C.abab

D.bbaa
D.bbaa
D.bbaa

Answer: A.abaa
A.abaa
A.abaa

45 "ट्रिस्ट विथ डेस्टिनी" (Tryst with Destiny) हे भाषण कोणी दिले

The “Tryst with Destiny” Speech was made by-

ٹرسٹ وتھ ڈسٹنی تقریر بنائی گئی تھی :

A.सुभाष चंद्र बोस
A.Subhas Chandra Bose
A.سبھاش چندر بوس نے

B.महात्मा गांधी
B.Mahatma Gandhi
B.مہاتما گاندھی نے

C.जवाहरलाल नेहरु
C.Jawaharlal Nehru
C.جواہرلال نہرو نے

D.सरदार वल्लभभाई पटेल
D.Sardar Vallabhbhai Patel
D.سردار ولّبھ بھائی پٹیل نے

Answer: C.जवाहरलाल नेहरु
C.Jawaharlal Nehru
C.جواہرلال نہرو نے

46 सूचना: दिलेल्या पर्यायांमधून श्रेणी पूर्ण करणारी योग्य आकृती निवडा.

DIRECTIONS: Complete the series by choosing right figure from the given choices.

ہدایات: دیئے گئے اختیارات میں سے صحیح شکل کو چن کر سلسلہ کو مکمل کیجیئے

Problem Figures

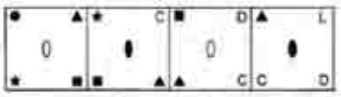

1 2 3 4

Answer Figures

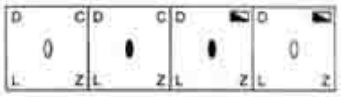

(A) (B) (C) (D)

A. (A)

B. (B)

C. (C)

D. (D)

Answer: C. (C)

47 पेट्रोलची किंमत ₹60 प्रति लिटर आहे आणि स्पिरीटची किंमत ₹40 प्रति लिटर आहे. पेट्रोल आणि स्पिरीट कोणत्या गुणोत्तरात मिसळले जावे ज्यामुळे जर ₹75 प्रति लिटरवर मिश्रणाची विक्री केल्यास 25% नफा मिळेल?

The price of petrol is ₹60 per liter and the price of spirit is ₹40 per liter. In what ratio the petrol and spirit be mixed such that the profit after selling the mixture at ₹75 per liter be 25%?

پٹرول کی قیمت ₹60 فی لیٹر ہے اور سپرٹ کی قیمت ₹40فی لیٹر ہے. پٹرول اور اسپرٹ کو کس تناسب سے ملایا جائے کہ ₹75 فی لیٹر مرکب فروخت کرنے کے بعد منافع 25% ہو؟

A.1 : 1
A.1 : 1
A.1 : 1

B.3 : 2
B.3 : 2
B.3 : 2

C.5 : 1
C.5 : 1
C.5 : 1

D.असे मिश्रण शक्य नाही
D.Such a mixture is not possible
D.ایسا مرکب ممکن نہیں ہے

Answer: D.असे मिश्रण शक्य नाही
D.Such a mixture is not possible
D.ایسا مرکب ممکن نہیں ہے

48

दिलेल्या आकृतीमध्ये, O हे वर्तुळाचे केंद्र आहे. AB ही स्पर्शिका आहे. AR = 12 सेंमी आणि OB = 13 सेंमी आहे. OA काढा.

In the given figure, O is the Centre of the circle. AB is tangent. AR = 12 cm and OB = 13cm. Find OA.

دی گئی شکل میں، Oدائرے کا مرکز ہے. AB ٹانگنٹ ہے. AR =12 سینٹی میٹر اور OB =13 سینٹی میٹر. OA تلاش کریں.

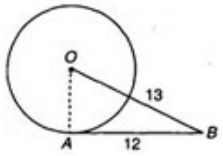

A. 6.5 सेंमी
A.6.5 cm
A. 6.5 سینٹی میٹر

B. 6 सेंमी
B. 6 cm
B. 6 سینٹی میٹر

C. 5 सेंमी
C. 5 cm
C. 5 سینٹی میٹر

D. यांपैकी कोणतेही नाही
D. None of these
D. کوئی نہیں

Answer: C. 5 सेंमी
C. 5 cm
C. 5 سینٹی میٹر

49

गुणाकार करा:
765844 × 4628 =?

Multiply:
765844 × 4628 =?

ضرب دیں:
765844 × 4628 =?

A.382776589
A.382776589
A.382776589

B.3255436522
B.3255436522
B.3255436522

C.3544326032
C.3544326032
C.3544326032

D.2376378965
D.2376378965
D.2376378965

Answer: C.3544326032
C.3544326032
C.3544326032

50 एक व्यक्ती त्याचा माल 7% तोट्याने विकतो. त्याने जर त्या रु. 80 अधिक किमतीने त्यांची विक्री केली असती, तर त्याला 9% नफा मिळाला असता? आरंभिक खरेदी किंमत (रुपयांमध्ये) काढा

A man sells his good at 7% loss. Had he sold it Rs 80 more, he would have gained 9% profit? Find the initial cost price (in Rs.).

ایک شخص اپنی چیز 7%کے نقصان پر فروخت کرتا ہے. اگر وہ اسے 80 روپے مزید پر فروخت کرے تو اسے 9% منافع ملے گا؟ ابتدائی لاگت کی قیمت (روپے میں) تلاش کریں.

A.500
A.500
A.500

B.450
B.450
B.450

C.480
C.480
C.480

D.490
D.490
D.490

Answer: A.500
A.500
A.500

51 सूचना: खालील दिलेल्या प्रश्नांची उत्तरे देण्यासाठी खालील माहितीचा अभ्यास करा.
12 लोक प्रत्येकी सहा लोक असलेल्या दोन समांतर रांगेमध्ये बसले आहेत, अशा प्रकारे बसलेले आहेत की लगतच्या व्यक्तींमधे समान अंतर आहे. रांग 1 मध्ये, P, Q, R, S, T आणि V बसलेले आहेत आणि ते सर्व दक्षिणेकडे बघत आहेत. रांग 2 मध्ये, A, B, C, D, E आणि F बसलेले आहेत आणि ते सर्व उत्तरेकडे बघत आहेत. म्हणून, दिलेल्या आसन व्यवस्थेत, रांगेत बसलेला प्रत्येक सदस्य दुसऱ्या रांगेत बसलेल्या सदस्याच्या समोरासमोर आहे.
A हा D च्या उजवीकडून तिसऱ्या जागेवर बसतो. A किंवा D दोघांपैकी कोणीही टोकाच्या शेवटी बसत नाही. T हा D च्या समोर आहे. V हा A च्या सामोर नाही आणि V कोणत्याही शेवटच्या टोकाशी बसलेला नाही. V हा T चा तात्काळ शेजारी नाही. B सर्वात शेवटच्या टोकावर बसतो. B आणि E च्या मध्ये फक्त दोन लोक बसतात. E हा V च्या सामोर नाही. दोन व्यक्ती R आणि Q च्या मध्ये बसतात. R हा T चा तत्काळ शेजारी नाही. C हा V च्या सामोर नाही. P हा R चा तत्काळ शेजारी नाही.
खालीलपैकी काय Fच्या संदर्भात सत्य आहे?

DIRECTIONS: Study following information to answer the given questions given below it.
Twelve people are sitting in two parallel rows containing six people each, in such a way that there is an equal distance between adjacent persons. In row 1, P, Q, R, S, T and V are seated and all of them are facing South. In row 2, A, B, C, D, E and F are seated and all of them are facing North. Therefore, in the given seating arrangement, each member seated in a' row faces another member of the other row.
A sits third to right of D. Neither A nor D sits at extreme ends. T faces D. V does not face A and V does not sit at any of the extreme ends. V is not an immediate neighbour of T. B sits at one of the extreme ends. Only two people sit between B and E. E does not face V. Two persons sit between R and Q. R is not an immediate neighbour of T. C does not face V. P is not an immediate neighbour of R.
Which of the following is true regarding F?

ہدایات: نیچے دیے گئے سوالوں کے جواب دینے کے لیے مندرجہ ذیل معلومات کا مطالعہ کریں۔
بارہ لوگ دو متوازی قطار میں بیٹھے ہیں جس میں ہر ایک میں چھ لوگ شامل ہیں، اس طرح سے کہ قریبی افراد کے درمیان ایک مساوی فاصلہ ہے۔ قطار 1 میں P، Q، R، S، T اور V بیٹھے ہیں اور ان میں سے ہر ایک کا رخ جنوب کی طرف ہے۔ قطار 2 میں A، B، C، D، E اور F بیٹھے ہیں اور ان میں سے ہر ایک کا رخ شمال کی طرف ہے۔ لہذا، دیے گئے بیٹھنے کے انتظام میں، ایک قطار میں بیٹھا ہوا ہر ممبر دوسری قطار کے دوسرے ممبر کے سامنے ہے۔
A کا رخ V کی طرف ہے۔ D کا رخ T انتہائی کناروں پر بیٹھے ہیں۔ D نہ ہی A کے دائیں سے تیسری جگہ بیٹھا ہے۔ نہ تو A، D اور B ایک انتہائی سرے پر بیٹھا ہے۔ B کا فوری پڑوسی نہیں ہے۔ V، T کسی بھی انتہائی کنارے پر نہیں بیٹھا ہے۔ V طرف نہیں ہے اور E کا فوری پڑوسی R، T کے درمیان دو لوگ بیٹھے ہیں۔ Q اور R کی طرف نہیں ہے۔ V کا رخ E کے درمیان صرف دو لوگ بیٹھے ہیں۔ P، R کا فوری پڑوسی نہیں ہے۔ V کا رخ C نہیں ہے۔
F کے متعلق مندرجہ ذیل میں سے کون سا درست ہے؟

A.F च्या C उजवीकडून दुसऱ्या जागेवर बसतो
A.F sits second to right of C
A.F، C کے دائیں سے دوسرے پر بیٹھا ہے

B.F हा A चा तत्काळ शेजारी नाही
B.F is not an immediate neighbour of A
B.F، A کا فوری پڑوسی نہیں ہے

C.F हा D च्या डावीकडून तिसऱ्या जागेवर बसतो
C.F sits third to left of D
C.F، D کے بائیں سے تیسری جگہ بیٹھا ہے

D.F हा V कडे बघत आहे
D.F faces V
D.F، V کے سامنے ہے

Answer: D.F हा V कडे बघत आहे
D.F faces V
D.F، V کے سامنے ہے

52 सूचना: खालील दिलेल्या प्रश्नांची उत्तरे देण्यासाठी खालील माहितीचा अभ्यास करा.
12 लोक प्रत्येकी सहा लोक असलेल्या दोन समांतर रांगेमध्ये बसले आहेत, अशा प्रकारे बसलेले आहेत की लगतच्या व्यक्तींमधे समान अंतर आहे. रांग 1 मध्ये, P, Q, R, S, T आणि V बसलेले आहेत आणि ते सर्व दक्षिणेकडे बघत आहेत. रांग 2 मध्ये, A, B, C, D, E आणि F बसलेले आहेत आणि ते सर्व उत्तरेकडे बघत आहेत. म्हणून, दिलेल्या आसन व्यवस्थेत, रांगेत बसलेला प्रत्येक सदस्य दुसऱ्या रांगेत बसलेल्या सदस्याच्या समोरासमोर आहे.
A हा D च्या उजवीकडून तिसऱ्या जागेवर बसतो. A किंवा D दोघांपैकी कोणीही टोकाच्या शेवटी बसत नाही. T हा D च्या समोर आहे. V हा A च्या सामोर नाही आणि V कोणत्याही शेवटच्या टोकाशी बसलेला नाही. V हा T चा तात्काळ शेजारी नाही. B सर्वात शेवटच्या टोकावर बसतो. B आणि E च्या मध्ये फक्त दोन लोक बसतात. E हा V च्या सामोर नाही. दोन व्यक्ती R आणि Q च्या मध्ये बसतात. R हा T चा तत्काळ शेजारी नाही. C हा V च्या सामोर नाही. P हा R चा तत्काळ शेजारी नाही.
P हा V शी त्याच प्रमाणे संबंधित आहे, जसा, C हा F शी संबंधित आहे. समान नमुना लक्षात घेता E खालीलपैकी कोणाशी संबंधित आहे?

DIRECTIONS: Study following information to answer the given questions given below it.
Twelve people are sitting in two parallel rows containing six people each, in such a way that there is an equal distance between adjacent persons. In row 1, P, Q, R, S, T and V are seated and all of them are facing South. In row 2, A, B, C, D, E and F are seated and all of them are facing North. Therefore, in the given seating arrangement, each member seated in a' row faces another member of the other row.
A sits third to right of D. Neither A nor D sits at extreme ends. T faces D. V does not face A and V does not sit at any of the extreme ends. V is not an immediate neighbour of T. B sits at one of the extreme ends. Only two people sit between B and E. E does not face V. Two persons sit between R and Q. R is not an immediate neighbour of T. C does not face V. P is not an immediate neighbour of R.
P is related to V in, that same way, as C is related to, F. To which of the following is E related to, following the same pattern?

ہدایات: نیچے دیے گئے سوالوں کے جواب دینے کے لیے مندرجہ ذیل معلومات کا مطالعہ کریں۔
بارہ لوگ دو متوازی قطار میں بیٹھے ہیں جس میں ہر ایک میں چھ لوگ شامل ہیں، اس طرح سے کہ قریبی افراد کے درمیان ایک مساوی فاصلہ ہے۔ قطار 1 میں P، Q، R، S، T اور V بیٹھے ہیں اور ان میں سے ہر ایک کا رخ جنوب کی طرف ہے۔ قطار 2 میں A، B، C، D، E اور F بیٹھے ہیں اور ان میں سے ہر ایک کا رخ شمال کی طرف ہے۔ لہذا، دیے گئے بیٹھنے کے انتظام میں، ایک قطار میں بیٹھا ہوا ہر ممبر دوسری قطار کے دوسرے ممبر کے سامنے ہے۔
A کی V کی طرف ہے۔ D کا رخ T انتہائی کناروں پر بیٹھے ہیں۔ D نہ ہی A کے دائیں سے تیسری جگہ بیٹھا ہے۔ نہ تو A، D اور B ایک انتہائی سرے پر بیٹھا ہے۔ B کا فوری پڑوسی نہیں ہے۔ T، V کسی بھی انتہائی کنارے پر نہیں بیٹھا ہے۔ V طرف نہیں ہے اور E کا فوری پڑوسی T، R کے درمیان دو لوگ بیٹھے ہیں۔ Q اور R کی طرف نہیں ہے۔ V کا رخ E کے درمیان صرف دو لوگ بیٹھے ہیں۔ P، R کا فوری پڑوسی نہیں ہے۔ V کا رخ C نہیں ہے۔
P کا تعلق V سے ویسا ہی ہے جیسے C کا تعلق F سے ہے۔ اسی نمونے کے مطابق، مندرجہ ذیل میں E کا تعلق کس سے ہے؟

A.B
A.B
A.B

B.D
B.D
B.D

C.C
C.C
C.C

D.A
D.A
D.A

Answer: A.B
A.B
A.B

53 एक प्रकाश वर्ष जवळपास समान आहे:

One light year is approximately equal to:

ایک نوری سال تقریبا _____ کے برابر ہوتا ہے۔

A.9.4607×10^{13} m
A.9.4607×10^{13} m
A. 9.4607×10^{13} میٹر

B.9.4607×10^{14} m
B.9.4607×10^{14} m
B. 9.4607×10^{14} میٹر

C.9.4607×10^{15} m
C.9.4607×10^{15} m
C. 9.4607×10^{15} میٹر

D.9.4607×10^{16} m
D.9.4607×10^{16} m
D. 9.4607×10^{16} میٹر

Answer: C.9.4607×10^{15} m
C.9.4607×10^{15} m
C. 9.4607×10^{15} میٹر

54 सूचना: दिलेल्या पर्यायांमधून वेगळे ते बाहेर काढा.

DIRECTIONS: Find the odd one out from the given alternatives.

سمت: دیے گئے متبادل میں سے بے جوڑ کو تلاش کرو۔

	A.पाय A.Legs A.ٹانگوں
	B.डोळे B.Eyes B.آنکھیں
	C.बोटे C.Fingers C.انگلیاں
	D.कान D.Ears D.کان
Answer:	C.बोटे C.Fingers C.انگلیاں

55 सूचना: खाली दिलेल्या प्रश्नात एक विधान आहे ज्याचे I आणि II असे दोन निष्कर्ष त्याखाली अंकित केलेले आहेत. या आधारे सर्वात योग्य पर्याय निवडा.

विधान:
ज्या व्यक्तीचा रक्तगट AB आहे तो इतर कोणत्याही रक्तदात्याकडून रक्त स्वीकार करू शकतो.

निष्कर्ष:
I. AB रक्तगट असणाऱ्या रुग्णाला रक्त देताना त्या रक्ताची चाचणी करण्याची आवश्यकता नाही.
II. AB रक्तगट असणाऱ्या व्यक्तीसाठी रक्त कधीच कमी पडणार नाही.
`

DIRECTIONS: The question below has a statement followed by two conclusions numbered I and II. Based on this choose the option that is most suitable.

Statement:
A person having AB blood group can receive blood from any blood donor.

Conclusions:
I. There is no need to test the blood being given to AB blood group patient.
II. The AB blood group person will never have shortage of blood.

ہدایات: نیچے دیے گئے سوال میں ایک بیان کے بعد دو نتائج I اور II دیے گئے ہیں۔ اس کی بنیاد پر انتہائی موزوں آپشن کا انتخاب کیجیے۔

بیان:
ایک شخص جس کا خون کا گروپ اے بی ہو کسی بھی خون کے ڈونر سے خون وصول کرسکتا ہے.

نتیجے:
I. خون کے اے بی گروپ کے مریضوں کو خون دیتے وقت خون کی جانچ کرنے کی کوئی ضرورت نہیں ہے.
II. اے بیخون کے گروپ والے شخص کو کبھی خون کی کمی نہیں ہوگی.

A.केवळ निष्कर्ष क्रमांक I विधानास अनुसरून आहे
A.Only Conclusion I follows
A.صرف نتیجہ I لاگو ہو گا۔

B.केवळ निष्कर्ष क्रमांक II विधानास अनुसरून आहे
B.Only Conclusions II follows
B.صرف نتیجہ II لاگو ہو گا۔

C.निष्कर्ष क्रमांक I किंवा II अनुसरून आहे
C.Either I or II follows
C. I یا II میں سے ایک لاگو ہو گا۔

D.कोणताही निष्कर्ष अनुसरून नाही
D.Neither I nor II follow
D. I اور II میں سے کوئی بھی لاگو نہیں ہو گا۔

Answer: D.कोणताही निष्कर्ष अनुसरून नाही
D.Neither I nor II follow
D. I اور II میں سے کوئی بھی لاگو نہیں ہو گا۔

56	Choose the word which is opposite in meaning to the given word. HARMONY
	A.Strife
	B.Accord
	C.Agreement
	D.Consensus
Answer:	A.Strife

57 सूचना: अर्थपूर्ण परिच्छेद निर्माण करण्यासाठी, खाली दिलेली (P), (Q) (R), (S) आणि (T) ही पाच वाक्ये योग्य अनुक्रमाने पुनर्रचना करा; त्यांनतर खालील प्रश्नांची उत्तर द्या.

P. गाढ झोपलेला ससा जागा झाला आणि हळूहळू चालणाऱ्या कासवाने शर्यतीत हरविल्याचा त्याला मोठा धक्का बसला.
Q. ससा लवकरच कंटाळला आणि कासव पोहचेपर्यंत पुष्कळ वेळ आहे, असा विचार करून सशाने विश्रांती घ्यायचे ठरविले.
R. अति आत्मविश्वास असणारा ससा आव्हान स्वीकारतो आणि शर्यत सुरु झाल्याबरोबर खूप वेगाने धावतो.
S. दरम्यान, अंतिम रेषेपर्यंत पोहचत नाही तोपर्यंत कासव हळूहळू चालत राहते.
T. ससा वेगाने धावण्याच्या फुशारक्या मारत असल्याने कासवाने त्याला शर्यत लावण्याचे आव्हान दिले.

पुनर्रचना केल्यानंतर खालीलपैकी कोणते वाक्य दुसरे असेल?

DIRECTION: Rearrange the following five sentences (P), (Q), (R), (S) and (T) in the proper sequence to form a meaningful paragraph; then answer the questions given below them.
P. The overslept hare wakes up, only to be shocked that a slow moving tortoise beat it in the race.
Q. Soon it gets tired and decides to rest, thinking that there's plenty of time to relax before tortoise can catch up with it.
R. The overconfident hare accepts the challenge and runs as fast as it can after the race begins.
S. Meanwhile, the tortoise continues to walk slowly, until it reaches the finish line.
T. Tired of the bragging of a speedy hare, a tortoise challenges it to a race.

Which of the following should be the SECOND sentence after rearrangement?

ہدایات: ان پانچ جملوں (P)، (Q)، (R)، (S) اور (T) کو با معنی پیرا بنانے کے لئے دوبارہ ترتیب دیجئے، پھر نیچے دے گئے سوالوں کے جواب دیجئے

P. دیر تک سونے والا خرگوش جاگ گیا، خالی حیران ہونے کے لئے کی دھیرے چلنے والے کچھوے نے اسے دھوڈ میں ہرا دیا.
Q. جلدی وو تھک گیا اور آرام کرنے کہ ارادہ کیا، یہ سونچ کر کی ابھی آرام کرنے کے لئے بہت وقت ہے اسے پہلے کہ کچھوا اس تک پہنچ جاےگا.
R. ضرورت سے زیادہ بھروسا رکھنے والے خرگوش نے مقابلہ کی دعوت تسلیم کی اور دھوڈ شرو ہونے سے ہی تیز بھاگ گیا.
S. جبکہ ، کچھوا دھیرے چلنے لگا، جب تک وو منزل تک پہنچ گیا.
T. تیز چلنے والے خرگوش کی رفتار سے تنگ آکر، کچھوے نے اسے دھوڈ لگانے کی دعوت دی.

دوبارہ ترییب دینے کے بعد کون سا جملہ دوسرا ہونا چاہیے؟

A.R
A.R
A.R

B.Q
B.Q
B.Q

C.S
C.S
C.S

D.T
D.T
D.T

Answer: A.R
A.R
A.R

58 निर्देश: खाली दिलेले प्रश्न वर्ण मालिकेवर आधारित आहेत. या प्रत्येक मालिकेत, काही अक्षरे गहाळ आहेत. योग्य पर्याय निवडा पाच पेक्षा अधिक अक्षरे गहाळ असल्यास, मालिकेतील शेवटचे पाच अक्षरे निवडा .

abc - e - g - i - kl - - - -

DIRECTION: Questions given below are based on the letter series. In each of these series, some letters are missing. Select the correct alternative. If more than five letters are missing, select the last five letters of the series:

abc - e - g - i - kl - - - -

ہدایت نیچے دے ہے سوالات حرف سرج پر مشتمل ہیں . ہر میں کہیں حرف گمشدہ ہے . سہی اختیارات کو چنے . اگر پچ حرف گنمام ہو تو آخری پانچ حرفونکو چنے

abc - e - g - i - kl - - - -

A.uabeee
A.uabeee
A.uabeee

B.abcde
B.abcde
B.abcde

C.aedcb
C.aedcb
C.aedcb

D.qrstu
D.qrstu
D.qrstu

Answer: D.qrstu
D.qrstu
D.qrstu

59

सूचना: दिलेल्या चारांपैकी वेगळी (असंबद्ध) असणारी आकृती शोधून काढा.

DIRECTIONS: Find the odd from the given four figures.

ہدایات: دیئے گئے چار شکلوں میں سے طاق شکل کونسی ہے؟

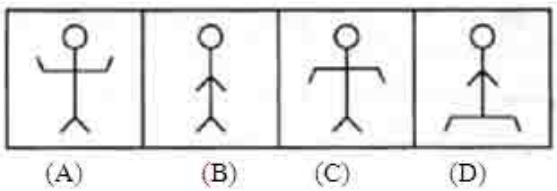

A. (A)

B. (B)

C. (C)

D. (D)

Answer: B. (B)

60 एक लघुतम संख्या जिला 4000 ने गुणले असता ती पूर्ण घन बनती, ती संख्या कोणती?

The smallest number which when multiplied with 4000 becomes a perfect cube number is?

سب سے چھوٹا عدد جو 4000 سے ضرب دینے کے بعد کامل مکعب عدد بن جاتا ہے وہ ہے؟

A.2
A.2
A.2

B.3
B.3
B.3

C.6
C.6
C.6

D.8
D.8
D.8

Answer: A.2
A.2
A.2

61 सूचना : खालील दिलेल्या प्रश्नामध्ये काही विधाने आणि काही निष्कर्ष आहेत. सामन्यात: ज्ञात तथ्यांपेक्षा ते वेगळे असतील तर दिलेली विधाने तुम्हाला सत्य मानवी लागतील आणि त्यानंतर दिलेल्या विधानाचे अनुकरण दिलेल्यापैकी कोणता निष्कर्ष तार्किकदृष्ट्या करतो ते ठरवा.

विधाने:
P < I > V ≥ O = T < S
निष्कर्ष:
I. O > P
II. S > V

DIRECTIONS: In the question given below, there are few statements followed by few conclusions. You have to take the given statements to be true even if they seem to be at variance with commonly known facts and then decide which of the given conclusion logically follow(s) from the given statements.

Statements:
P < I > V ≥ O = T < S
Conclusions:
I. O > P
II. S > V

ہدایات: مندرجہ ذیل سوال میں، کچھ بیانات کے بعد کچھ نتائج موجود ہیں. اگر آپ کو عام طور پر جانے جاتے حقائق کے ساتھ بھی متغیر ہونے لگے تو بھی آپ دئے گئے بیانات دماغ میں رکھیں اور پھر اس بات کا فیصلہ کریں کہ ذیل میں دیا گیا کونسا نتیجہ منطقانہ طور پر دیے گئے بیانات کی پیروی کرتا ہے.

بیانات:
P < I > V ≥ O = T < S
نتائج:
O > P .I
S > V .II

A.निष्कर्ष व II निष्कर्ष हे दोन्हीही खरे नाहीत
A.Neither conclusion I nor conclusion II is true
A.نہ ہی I نہ ہی II نتیجہ درست ہے

B.I किंवा II यापैकी एक निष्कर्ष खरा आहे
B.Either conclusion I or II is true
B.یا I یا II نتیجہ درست ہے

C.फक्त II निष्कर्ष खरा आहे
C.Only conclusion II is true
C.صرف نتیجہ II درست ہے

D.फक्त I निष्कर्ष खरा आहे
D.Only conclusion I is true
D.صرف نتیجہ I درست ہے

Answer: A.निष्कर्ष व II निष्कर्ष हे दोन्हीही खरे नाहीत
A.Neither conclusion I nor conclusion II is true
A.نہ ہی I نہ ہی II نتیجہ درست ہے

62 सूचना: दिलेल्या पर्यायांमधून वेगळे ते बाहेर काढा.

DIRECTIONS: Find the odd one out from the given alternatives.

سمت: دیے گئے متبادل میں سے بے جوڑ کو تلاش کرو۔

A.क्ष-किरण
A.X-Ray
A.ایکس-رے

B.दूरध्वनी
B.Telephone
B.ٹیلیفون

C.रेडीओ
C.Radio
C.ریڈیو

D.दूरचित्रवाणी
D.Television
D.ٹیلی ویژن

Answer: A.क्ष-किरण
A.X-Ray
A.ایکس-رے

63 एखाद्या मुलाला संवाद साधण्यात अडचण येत असेल परंतु उच्च बुद्धिमत्ता पातळी असेल तर त्याला हा त्रास असू शकतो

A child having difficulty communicating but high intelligence level can be suffering from

ایک بچہ کو مواصلات میں پریشانی ہوتی ہے لیکن ذہانت کے اعلی سطح سے اس کی تکلیف ہوسکتی ہے

A.ऑटिझम स्पेक्ट्रम डिसॉर्डर
A.Autism Spectrum Disorders
A.خود فکری طیف کی بیماری

B.सेरेब्रल पाल्सी
B.Cerebral Palsy
B.دماغی فالج

C.मतिमंदत्व
C.Mental retardation
C.دماغی بیماری

D.वरीलपैकी कोणतेही नाही
D.None of the above
D.درج بالا میں سے کوئی نہیں

Answer: A.ऑटिझम स्पेक्ट्रम डिसॉर्डर
A.Autism Spectrum Disorders
A.خود فکری طیف کی بیماری

64 A sentence with an underlined idiomatic expression is given. What is the meaning of the idiomatic expression 'A Good Samaritan' in the sentence given below?
Bradman was hailed by the newspaper as a good Samaritan after he stepped in and helped a woman who was being robbed.

A.A person who selflessly helps others, especially those in distress.

B.A person who always takes advantage of the misfortunes of others

C.A person who always has a selfish interest in helping others

D.None of the above

Answer: A.A person who selflessly helps others, especially those in distress.

65 खालील प्रश्नात एक आकृतिबंध दाखविला आहे आणि तो कळीची आकृती म्हणून नोंदला आहे. कागदाच्या मागच्या बाजूने बघितल्यास मूळची कळीची आकृती अचूकपणे कशी दिसेल हे तुम्हाला ठरवायचे आहे.

DIRECTIONS: In the following question, a design is given, marked as key figure. You have to determine which e will be the exact view of the original key figure seen from the reverse side of the paper.

نیچے کے سوال میں نقش دیا گیا ہے، جس پر اہم شکل کا نشان لگا ہے آپ کو یہ طے کرنا ہے کہ اہم شکل کا قطعی منظر کاغذ کی الٹی طرف سے کونسا ہوگا؟

मुख्य आकृती
Main Figure
اصل شکل



उत्तरासाठी पर्यायी आकृत्या
Answer Figure
جوابی شکل

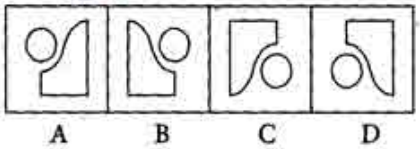

A. (A)

B. (B)

C. (C)

D. (D)

Answer: A. (A)

66 सूचना: खालील दिलेल्या प्रश्नांची उत्तरे देण्यासाठी खालील माहितीचा अभ्यास करा.
12 लोक प्रत्येकी सहा लोक असलेल्या दोन समांतर रांगेमध्ये बसले आहेत, अशा प्रकारे बसलेले आहेत की लगतच्या व्यक्तींमधे समान अंतर आहे. रांग 1 मध्ये, P, Q, R, S, T आणि V बसलेले आहेत आणि ते सर्व दक्षिणेकडे बघत आहेत. रांग 2 मध्ये, A, B, C, D, E आणि F बसलेले आहेत आणि ते सर्व उत्तरेकडे बघत आहेत. म्हणून, दिलेल्या आसन व्यवस्थेत, रांगेत बसलेला प्रत्येक सदस्य दुसऱ्या रांगेत बसलेल्या सदस्याच्या समोरासमोर आहे.
A हा D च्या उजवीकडून तिसऱ्या जागेवर बसतो. A किंवा D दोघांपैकी कोणीही टोकाच्या शेवटी बसत नाही. T हा D च्या समोर आहे. V हा A च्या सामोर नाही आणि V कोणत्याही शेवटच्या टोकाशी बसलेला नाही. V हा T चा तात्काळ शेजारी नाही. B सर्वात शेवटच्या टोकावर बसतो. B आणि E च्या मध्ये फक्त दोन लोक बसतात. E हा V च्या सामोर नाही. दोन व्यक्ती R आणि Q च्या मध्ये बसतात. R हा T चा तत्काळ शेजारी नाही. C हा V च्या सामोर नाही. P हा R चा तत्काळ शेजारी नाही.
T आणि S च्या मध्ये किती व्यक्ती बसले आहेत?

DIRECTIONS: Study following information to answer the given questions given below it.
Twelve people are sitting in two parallel rows containing six people each, in such a way that there is an equal distance between adjacent persons. In row 1, P, Q, R, S, T and V are seated and all of them are facing South. In row 2, A, B, C, D, E and F are seated and all of them are facing North. Therefore, in the given seating arrangement, each member seated in a' row faces another member of the other row.
A sits third to right of D. Neither A nor D sits at extreme ends. T faces D. V does not face A and V does not sit at any of the extreme ends. V is not an immediate neighbour of T. B sits at one of the extreme ends. Only two people sit between B and E. E does not face V. Two persons sit between R and Q. R is not an immediate neighbour of T. C does not face V. P is not an immediate neighbour of R.
How many persons are seated between T and S?

ہدایات: نیچے دیے گئے سوالوں کے جواب دینے کے لیے مندرجہ ذیل معلومات کا مطالعہ کریں۔
بارہ لوگ دو متوازی قطار میں بیٹھے ہیں جس میں ہر ایک میں چھ لوگ شامل ہیں، اس طرح سے کہ قریبی افراد کے درمیان ایک مساوی فاصلہ ہے۔ قطار 1 میں P، Q، R، S، T اور V بیٹھے ہیں اور ان میں سے ہر ایک کا رخ جنوب کی طرف ہے۔ قطار 2 میں A، B، C، D، E اور F بیٹھے ہیں اور ان میں سے ہر ایک کا رخ شمال کی طرف ہے۔ لہذا، دیے گئے بیٹھنے کے انتظام میں، ایک قطار میں بیٹھا ہوا ہر ممبر دوسری قطار کے دوسرے ممبر کے سامنے ہے۔
A کی V کی طرف ہے۔ D کا رخ T انتہائی کناروں پر بیٹھے ہیں۔ D نہ ہی A کے دائیں سے تیسری جگہ بیٹھا ہے۔ نہ تو A، D اور B ایک انتہائی سرے پر بیٹھا ہے۔ B کا فوری پڑوسی نہیں ہے۔ V، T کسی بھی انتہائی کنارے پر نہیں بیٹھا ہے۔ V طرف نہیں ہے اور E کا فوری پڑوسی T، R کے درمیان دو لوگ بیٹھے ہیں۔ Q اور R کی طرف نہیں ہے۔ V کا رخ E کے درمیان صرف دو لوگ بیٹھے ہیں۔ P، R کا فوری پڑوسی نہیں ہے۔ V کا رخ C کی طرف نہیں ہے۔
T اور S کے درمیان کتنے لوگ بیٹھے ہیں؟

A.एक
A.One
A.ایک

B.दोन
B.Two
B.دو

C.तीन
C.Three
C.تین

D.चार
D.Four
D.چار

Answer: B.दोन
B.Two
B.دو

67 पुराना किला हा _____मध्ये आहे

The Purana Quila is in-

پرانہ قلعہ ہے :

A.मुंबई
A.Mumbai
A.ممبئی میں

B.दिल्ली
B.Delhi
B.دہلی میں

C.अमृतसर
C.Amritsar
C.امرتسر میں

D.लुधियाना
D.Ludhiana
D.لدھیانہ میں

Answer: B.दिल्ली
B.Delhi
B.دہلی میں

68 पुढील जोडशब्द पूर्ण करा . '---------- धर्म'

A.दान

	B.अधर्म
	C.A व B दोन्ही बरोबर
	D.A व B दोन्ही चूक
Answer:	A.दान

69	खालीलपैकी नपुंसकलिंगी शब्द ओळखा.
	A.हत्या
	B.भृणहत्या
	C.हत्यार
	D.हत्यारा
Answer:	C.हत्यार

70	‘ ते शूर सरदार आहेत.’ या वाक्यातील विशेषण ओळखा.
	A.ते
	B.शूर
	C.सरदार
	D.आहेत
Answer:	B.शूर

71	वीट हे खालीलपैकी कशाचे उदाहरण आहे? A brick is an example of: اینٹ کس شکل کا نمونہ ہے

A. घन

A. Cube

A. کیوب

B. आयातज / घन-कल्प (क्युबॉईड)

B. Cuboid

B. کیوبائیڈ

C. लोलक (प्रिझम)

C. Prism

C. پرسم

D. दंड-गोल

D. Cylinder

D. سلنڈر

Answer: B. आयातज / घन-कल्प (क्युबॉईड)

B. Cuboid

B. کیوبائیڈ

72 3^{48} चा एकक स्थानचा अंक?

Unit digit of 3^{48} is?

3^{48} کا یونٹ ہندسہ ہے؟

A.1
A.1
A.1

B.3
B.3
B.3

C.9
C.9
C.9

D.7
D.7
D.7

Answer: A.1
A.1
A.1

73 विशिष्ट सांकेतिक भाषेमध्ये, जर SPLENDOR हा शब्द UFNJPHQJ असा कूटबध्द केला जात असेल, DISASTER हा शब्द त्या भाषेत कसा कूटबध्द केला जाईल?

In a certain code language if the word SPLENDOR is coded as UFNJPHQJ, then how is the word DISASTER coded in that language?

ایک مخصوص ضابطے کی زبان میں، اگر لفظ SPLENDOR کو UFNJPHQJ لفظ اس زبان میں DISASTER کو لکھاجاتاہے، تو کیسے لکھاجائیگا؟

A.FRUBUNGJ
A.FRUBUNGJ
A.FRUBUNGJ

B.HRUDNPJL
B.HRUDNPJL
B.HRUDNPJL

C.FRUBNPLH
C.FRUBNPLH
C.FRUBNPLH

D.HRDLJNLJ
D.HRDLJNLJ
D.HRDLJNLJ

Answer: A.FRUBUNGJ
A.FRUBUNGJ
A.FRUBUNGJ

74 लोकरीचे कापड उबदार ठेवतात कारण की?

Woolen clothes keep the body warm because?

اونی کپڑے جسم کو گرم رکھتے ہیں کیوں کہ؟

A.लोकरीने शरीराचे तापमान वाढते
A.Wool increases the temperature of the body
A.اون جسم کے درجہ حرارت کو بڑھاتا ہے

B.लोकर हे उष्णतेचे वाईट संवाहक आहे त्यामुळे ते शरीरापासून उष्णतेला बाहेर जाऊ देत नाही
B.Wool is the bad conductor of the heat so it does not allow heat to flow out of the body
B.اون کے اندر سے گرمی پاس نہیں ہوتی اس لئے یہ گرمی کو جسم سے باہر نہیں جانے دیتا ہے

C.लोकर बाह्य वस्तूमधून तेजोमय उष्णतेला शोषून घेते
C.Wool absorbs radiant heat from outer objects
C.اون باہری اشیاء سے اشعاعی حرارت کو جذب کرتا ہے

D.लोकर बाह्य वस्तूमधून उष्णता नाकारते
D.Wool rejects heat from outer objects
D.اون باہری اشیاء کی گرمی کو مسترد کردیتا ہے

Answer: B.लोकर हे उष्णतेचे वाईट संवाहक आहे त्यामुळे ते शरीरापासून उष्णतेला बाहेर जाऊ देत नाही
B.Wool is the bad conductor of the heat so it does not allow heat to flow out of the body
B.اون کے اندر سے گرمی پاس نہیں ہوتی اس لئے یہ گرمی کو جسم سے باہر نہیں جانے دیتا ہے

75 सूचना: दिलेल्या पर्यायांमधून वेगळे ते बाहेर काढा.

DIRECTIONS: Find the odd one out from the given alternatives.

سمت: دیے گئے متبادل میں سے بے جوڑ کو تلاش کرو۔

A.508
A.508
A.508

B.328
B.328
B.328

C.608
C.608
C.608

D.148
D.148
D.148

Answer: C.608
C.608
C.608

76 10 वर्षांपूर्वी, रमेशचे वडील रमेशपेक्षा 4 पट मोठे होते. दहावर्षांनंतर त्यांचे वय त्यांच्या मुलाच्या वयाच्या दुप्पट होईल. रमेशचे वय किती आहे (वर्षांमध्ये)?

10 years ago, Ramesh's father was 4 times older than Ramesh. Ten years hence his age will be twice his sons age. What is the age of Ramesh (in years)?

10 سال پہلے رمیش کی والد کی عمر 4 گنا زیادہ تھی رمیش کی عمر کے۔10 سال بعد اس کی عمر دوگنی ہو گی بیٹے کی عمر کے۔ رمیش کی عمر(سالوں میں)کیا ہے؟

A.12
A.12
A.12

B.15
B.15
B.15

C.16
C.16
C.16

D.20
D.20
D.20

Answer: D.20
D.20
D.20

77 इमल्सीकरण म्हणजे-

Emulsification is

شیرہ سازی (ایمولسیفیکیشن) کا مطلب ہے

A.चरबी अगदी लहान गोळ्यामध्ये तोडणे
A.Breaking fats into small globules
A.فیٹ کو چھوٹے ذرات میں توڑنا

B.चरबीचे पचन
B.Digestion of fats
B.فیٹ کا انہضام

C.चरबीचे शोषण
C.Absorption of fats
C.فیٹ کا انجذاب

D.चरबीची साठवण
D.Storage of fats
D.فیٹ کا اسٹوریج

Answer: A.चरबी अगदी लहान गोळ्यामध्ये तोडणे
A.Breaking fats into small globules
A.فیٹ کو چھوٹے ذرات میں توڑنا

78 अकारण भीती (फोबिया) चा याच्याशी जवळचा संबंध आहे

Phobias are associated closely with

کے ساتھ فوبیا کا سب سے قریبی لگاو ہے

A.राग
A.Anger
A.غصہ

B.हर्षातिरेक
B.Euphoria
B.بشاشت

C.दु: ख
C.Sadness
C.غم

D.घृणा
D.Disgust
D.کراہت بے زاری

Answer: D.घृणा
D.Disgust
D.کراہت بے زاری

79 निर्देशः खालील अंक-अक्षरी-चिन्ह क्रम यांचा काळजीपूर्वक अभ्यास करा आणि खालील प्रश्नांची उत्तरे द्या..

R * T J L 2 $ D = M # 8 C % B < K 1 & A W ? P E + Q @ 7 F 6

वरील क्रम उलट क्रमाने लिहिलेला असेल तर खालील पर्याया पैकी कोणता घटक हा उजवी कडून १६ व्या च्या उजवी कडे ६ वा असेल ?

DIRECTIONS: Study the following digit-letter-symbol sequence carefully and answer the questions given below.

R * T J L 2 $ D = M # 8 C % B < K 1 & A W? P E + Q @ 7 F 6

If the above sequence is written in reverse order then which of the following will be sixth to right of sixteenth element from the right end?

ہدایت نیچے دی گی حرف نشان اور نمبرس کی ترتیب کو پڑھئے اور سوالات کا جواب دیجئے

R * T J L 2 $ D = M # 8 C % B < K 1 & A W ? P E + Q @ 7 F 6

اگر اپری ترتیب پوری طرح سے الٹے مے ترتیب کی جائےتو سیدھے ہاتھ کے باجو سے سولہوے حرف کے سیدھے ہاتھ میں چھٹا حرف کیا ایگا ؟

A.A
A.A
A.A

B.?
B.?
B.?

C.B
C.B
C.B

D.M
D.M
D.M

Answer: D.M
D.M
D.M

80 रेन जंगल कुठे आढळतात?

Where are Rain forests found?

بارش جنگلات کہاں پائے جاتے ہیں؟

A.मध्य भारत
A.Central India
A. مرکزی بھارت

B.पूर्वीय घाट
B.Eastern Ghat
B. مشرقی گھاٹ

C.उत्तर पूर्व हिमालय आणि पश्चिम घाट
C.North-Eastern Himalaya and Western Ghat
C. شمال مشرقی ہمالیہ اور مغربی گھاٹ

D.उत्तर पूर्व हिमालय आणि पूर्वीय घाट
D.North-Western Himalaya and Eastern Ghat
D. شمال مغربی ہمالی اور مشرقی گھاٹ

Answer: C.उत्तर पूर्व हिमालय आणि पश्चिम घाट
C.North-Eastern Himalaya and Western Ghat
C. شمال مشرقی ہمالیہ اور مغربی گھاٹ

81 खालीलपैकी अशुद्ध वाक्य कोणते ?

A.संदीप मोठ्या कंपनीला कामात आहे.

B.विजय कंपनीत मोठ्या हुद्द्यावर आहे.

C.त्याचे काका साधे कामगार आहेत.

D.वीणाची मावशी नोकरी करते.

Answer: A.संदीप मोठ्या कंपनीला कामात आहे.

82 खालीलपैकी कश्याने भारत गणतंत्र झाला?

Which of the following made India a Republic?

انمیں سے کون بھارت کو جمہور بناتا ہے

A.हे सरकारचे संसदीय स्वरूप आहे
A.Its Parliamentary form of the government
A.حکومت کا پارلیمانی انداز

B.15 ऑगस्ट 1947ची स्वातंत्र्य प्राप्ती
B.Achievement of independence on 15th August, l947
B.15اگست 1947 کو آزادی حاصل کرنا

C.त्याच्या निवडलेल्या राज्याध्यक्षाने
C.Its elected head of state
C.ملک کے سربراہ کا چنا ہوا ہونا

D.सरकारची प्रत्यक्ष निवडणूक
D.Direct election of the government
D.حکومت کا سیدھا چنا جانا

Answer: C.त्याच्या निवडलेल्या राज्याध्यक्षाने
C.Its elected head of state
C.ملک کے سربراہ کا چنا ہوا ہونا

83 सूचना: अर्थपूर्ण परिच्छेद निर्माण करण्यासाठी, खाली दिलेली (P), (Q) (R), (S) आणि (T) ही पाच वाक्ये योग्य अनुक्रमाने पुनर्रचना करा; त्यांनतर खालील प्रश्नांची उत्तर द्या.

P. गाढ झोपलेला ससा जागा झाला आणि हळूहळू चालणाऱ्या कासवाने शर्यतीत हरविल्याचा त्याला मोठा धक्का बसला.
Q. ससा लवकरच कंटाळला आणि कासव पोहचेपर्यंत पुष्कळ वेळ आहे, असा विचार करून सशाने विश्रांती घ्यायचे ठरविले.
R. अति आत्मविश्वास असणारा ससा आव्हान स्वीकारतो आणि शर्यत सुरु झाल्याबरोबर खूप वेगाने धावतो.
S. दरम्यान, अंतिम रेषेपर्यंत पोहचत नाही तोपर्यंत कासव हळूहळू चालत राहते.
T. ससा वेगाने धावण्याच्या फुशारक्या मारत असल्याने कासवाने त्याला शर्यत लावण्याचे आव्हान दिले.

पुनर्रचना केल्यानंतर खालीलपैकी कोणते वाक्य पाचवे असेल?

DIRECTION: Rearrange the following five sentences (P), (Q), (R), (S) and (T) in the proper sequence to form a meaningful paragraph; then answer the questions given below them.
P. The overslept hare wakes up, only to be shocked that a slow moving tortoise beat it in the race.
Q. Soon it gets tired and decides to rest, thinking that there's plenty of time to relax before tortoise can catch up with it.
R. The overconfident hare accepts the challenge and runs as fast as it can after the race begins.
S. Meanwhile, the tortoise continues to walk slowly, until it reaches the finish line.
T. Tired of the bragging of a speedy hare, a tortoise challenges it to a race.

Which of the following should be the FIFTH sentence after rearrangement?

ہدایات: ان پانچ جملوں (P)، (Q)، (R)، (S) اور (T) کو با معنی پیرا بنانے کے لئے دوبارہ ترتیب دیجئے، پھر نیچے دے گئے سوالوں کے جواب دیجئے

P. دیر تک سونے والا خرگوش جاگ گیا، خالی حیران ہونے کے لئے کی دھیرے چلنے والے کچھوے نے اسے دھوڈ میں ہرا دیا.
Q. جلدی وو تھک گیا اور آرام کرنے کہ ارادہ کیا، یہ سونچ کر کی ابھی آرام کرنے کے لئے بہت وقت ہے اسے پہلے کہ کچھوا اس تک پہنچ جاےگا.
R. ضرورت سے زیادہ بھروسا رکھنے والے خرگوش نے مقابلہ کی دعوت تسلیم کی اور دھوڈ شرو ہونے سے ہی تیز بھاگ گیا.
S. جبکہ ، کچھوا دھیرے چلنے لگا، جب تک وو منزل تک پہنچ گیا.
T. تیز چلنے والے خرگوش کی رفتار سے تنگ آکر، کچھوے نے اسے دھوڈ لگانے کی دعوت دی.

دوبارہ ترییب دینے کے بعد کون سا جملہ پانچوہ ہونا چاہیے؟

A.P
A.P
A.P

B.R
B.R
B.R

C.S
C.S
C.S

D.T
D.T
D.T

Answer: A.P
A.P
A.P

84 चतुर्भुजाच्या चार कोनांचे माप 3:4:5:6 या गुणोत्तरामध्ये आहेत. चौथ्या कोनाचे माप काय आहे?

The measure of the four angles of a quadrilateral is in the ratio of 3:4:5:6. What is the measure of fourth angle?

ایک کوارڈیلیٹرل کے چار زاویوں کی پیمائش 3: 4: 5: 6 کے تناسب میں ہے۔ چوتھے زاویہ کی پیمائش کیا ہے؟

A.110°
A.110°
A.110°

B.120°
B.120°
B.120°

C.140°
C.140°
C.140°

D.125°
D.125°
D.125°

Answer: B.120°
B.120°
B.120°

85 एका घनाला रंगवून 216 लहान आणि समान घनांमध्ये कापले गेले आहे.
एकही रंगवलेला चेहरा नसलेले किती लहान घन आहेत?

A cube is painted and cut into 216 smaller and identical cubes by making the minimum possible number of cuts.
How many smaller cubes have no painted face?

ایک کیوب کے رنگ دیکر 216 ایک جیسے ٹکڑے جائیں تو، کتنے ایسے چھوٹے کیوب کے ٹکڑے ہوں گے جن کا کوئی منہ رنگین نہیں ہوگا؟

A.216
A.216
A.216

B.200
B.200
B.200

C.125
C.125
C.125

D.64
D.64
D.64

Answer: D.64
D.64
D.64

86 एक माणूस उत्तरेला 6 किमी चालत जातो, मग त्याच्या डाव्या बाजूला वळतो आणि 4 किमी चालतो. तो पुन्हा डावीकडे वळतो आणि 6 किमी चालतो. या ठिकाणी तो त्याच्या उजव्या बाजूला वळतो आणि 6 किमी चालतो. तर तो सुरुवातीच्या ठिकाणापासून किती किमी अंतरावर आणि कुठल्या दिशेला आहे?

A man walks 6 km towards the north, then turns towards his left and walks for 4 km. He again turns left and walks for 6 km. At this point he turns to his right and walks for 6 km. How many km and in what direction is he from the starting point?

ایک آدمی شمال کی طرف 6 کلومیٹر چلتا ہے، پھر اپنے بائیں طرف مڑتا ہے اور 4 کلومیٹر چلتا ہے۔ وہ دوبارہ بائیں مڑتا ہے اور 6 کلومیٹر چلتا ہے۔ اس نقطہ پر وہ اپنے دائیں طرف مڑتا ہے اور 6 کلومیٹر چلتا ہے۔ شروعاتی نقطہ سے وہ کتنے کلومیٹر اور کس سمت میں ہے؟

A.पश्चिमेला, 10 किमी वर
A.10 km, West
A.10 کلومیٹر، مغرب

B.दक्षिणेला, 6 किमी वर
B.6 km, South
B.6 کلومیٹر، جنوب

C.दक्षिणेला, 4 किमी वर
C.4 km, South
C.4کلومیٹر، جنوب

D.पश्चिमेला, 8 किमी वर
D.8 km, West
D.8کلومیٹر، مغرب

Answer: A.पश्चिमेला, 10 किमी वर
A.10 km, West
A.10 کلومیٹر، مغرب

87 भारत सरकार चा कोणता विभाग सर्वात जास्त व्यवसायाची माहिती पुरवतो?

Which department of the Indian Government supplies the greatest amount of occupational information?

بھارتی حکومت کا کونسا شعبہ پیشہ ورانہ معلومات فراہم کرتا ہے؟

A.वाणिज्य विभाग
A.Department of commerce
A.تجارت کا محکمہ

B.आरोग्य आणि कल्याण विभाग
B.Department of health and welfare
B.صحت اور فلاح و بہبود کا محکمہ

C.शिक्षण विभाग
C.Department of Education
C.تعلیم کا شعبہ

D.श्रम विभाग
D.Department of Labour
D.لیبر کا شعبہ

Answer: D.श्रम विभाग
D.Department of Labour
D.لیبر کا شعبہ

88 दूरस्थ क्षेत्रामध्ये अन्नपदार्थ आणि औशधी पोहोंचवण्यासाठी खालीलपैकी काय वापरले जाते?

Which of the following is used to drop food and medicines in the remote areas?

مندرجہ ذیل میں سے کس کا استعمال دور دراز کے علاقوں میں خوراک اور ادویات کو پہنچانےکےلئے کیا جاتا ہے؟

A.हेलिकॉप्टर
A.Helicopter
A. ہیلی کاپٹر

B.स्कुटर
B.Scooter
B. اسکوٹر

C.कार
C.Car
C. کار

D.सायकल
D.Bicycle
D. سائیکل

Answer: A.हेलिकॉप्टर
A.Helicopter
A. ہیلی کاپٹر

89 सूचना: प्रत्येक प्रश्नाला एक प्रमुख विधानासोबत चार विधाने आहेत ज्यांच्याखाली A, B, C, आणि D असे चार विधान आहेत. क्रमवार विधानांची जोडी निवडा ज्यामध्ये प्रथम विधान दुसऱ्या विधानाला सुचवते, आणि दोन्ही विधाने तर्किकदृष्ट्या प्रमुख विधानासोबत निगडित असेल.

जीवन एकतर एक स्वप्न आहे किंवा एक दुःस्वप्न आहे.
A. जीवन म्हणजे एक स्वप्न आहे.
B. जीवन एक दुःस्वप्न आहे.
C. जीवन एक स्वप्न नाही.
D. जीवन एक दुःस्वप्न नाही.

DIRECTIONS: Each question has a main statement followed by four statements labelled A, B, C and D. Choose the ordered pair of statements, where the first statement implies the second, and the two statements are logically consistent with the main statement.

Life is either a dream or a nightmare .
A. Life is a dream
B. Life is a nightmare
C. Life is not a dream
D. Life is not a nightmare

ہدایت: ہر سوال میں ایک جملہ ہے جسکے بعد چار جملےاے، بی،سی اور ڈی کے نام سے دئے گئے ہیں اسمیں منسلک جوڑیوں کو چنئے۔ جہاں پہلا جملہ دوسرے جملہ کی اور اشارہ کر رہا ہے اور دو جملے منطقی مرکزی بیان کے مطابق ہیں

زندگی یا تو خواب ہے یا ایک ڈراؤنا خواب
A۔ زندگی ایک خواب ہے
B۔ زندگی ایک ڈراؤنا خواب ہے
C۔ زندگی خواب نہیں ہے
D۔ زندگی ڈراؤنا خواب نہیں ہے

A.AD
A.AD
A.AD

B.DA
B.DA
B.DA

C.CA
C.CA
C.CA

D.AB
D.AB
D.AB

Answer: B.DA
B.DA
B.DA

90 एका व्यक्तिकडे बोट दाखवून रीना म्हणते, “ती व्यक्ति माझ्या वडीलांच्या आईच्या एकुलत्या मुलाचा मुलगा आहे” मग त्या व्यक्तिचे रीनासोबत नाते काय?

Pointing towards a person Reena says. "That person is the son of the only child of my paternal grandmother." How is that person related to Reena?

آدمی کی طرف اشارہ کرکے رینا نے کہا." وو آدمی میری دادی کے واحد بیٹے کا بیٹا ہے." اس آدمی کا رینا سے کیا رشتہ تھا؟

A.मुलगा
A.Son
A.بیٹا

B.भाऊ
B.Brother
B.بھائی

C.चुलत भाऊ
C.Cousin
C.چچا زاد

D.माहिती अपुरी आहे
D.Data insufficient
D. ڈیٹا ناکافی

Answer: B.भाऊ
B.Brother
B.بھائی

91 डॉक्यूमेंट्री फिल्मस ह्या साठी तयार केले जातात

Documentary films are made in order to—

دستاویزی فلمیں بنائی جا سکتی ہیں—

A.शिक्षण-अध्यापन प्रक्रिया अधिक प्रभावी बनवण्यासाठी
A.Make a teaching-learning process more effective
A.ایک تدریس سیکھنے کے عمل کو مزید مؤثر بنائیں

B.अत्यंत महत्वाच्या घटनां बद्दल माहिती देण्यासाठी
B.Give the knowledge about a core event or related phenomenon
B.ایک بنیادی واقعہ یا متعلقہ رجحان کے بارے میں علم دو

C.एका राजकारण्याच्या आयुष्यातील यशाचं वर्णन करण्यासाठी
C.Describe the life achievements of a politician
C.ایک سیاستدان کی زندگی کی کامیابیوں کی وضاحت کریں

D.वरीलपैकी काहीही नाही
D.None of the above
D.اوپر میں سے کوئی نہیں

Answer:
B.अत्यंत महत्वाच्या घटनां बद्दल माहिती देण्यासाठी
B.Give the knowledge about a core event or related phenomenon
B.ایک بنیادی واقعہ یا متعلقہ رجحان کے بارے میں علم دو

92 यापैकी कोणती आकृती वर्ग, फळा आणि शाळा यांच्या दरम्यानचे नाते उत्तमरित्या दर्शवते?

Which of the following diagrams indicates the best relation between Class, Blackboard and School ?

مندرجہ ذیل ڈایاگراموں میں سے کون سی ایک کلاس، بلیکبورڈ اور سکول کے درمیان بہترین رشتہ ظاہر کرتی ہے؟

(A) 

(B) 

(C) 

(D) 

Answer: (C) 

93 कंप्यूटर – कीबोर्डच्या ‘Q’ आणि ‘E’ च्या मध्ये कोणती की (key) असते?

Which key is present in between the ‘Q’ & ‘E’ keys of a computer – keyboard?

کمپیوٹر کے ''کی بورڈ'' میں Q اور E کی(key) کے بیچ میں ------ کی (key) ہوتی ہے :

A.R
A.R
A.R

B.W
B.W
B.W

C.T
C.T
C.T

D.Y
D.Y
D.Y

Answer: B.W
B.W
B.W

94 $\left(\frac{\sqrt{625}}{11} \times \frac{14}{\sqrt{25}} \times \frac{11}{\sqrt{196}}\right) = ?$

A. 6

B. 5

C. 8

D. 11

Answer: B. 5

95 16 वर्षांचे मूल बुद्ध्यांक चाचणीत 75 गुण मिळविते; त्याचे मानसिक वय _____ असेल

A child of 16 years scores 75 in an 1Q test; his mental age will be_____

16 سالہ ایک بچہ آئی قیو ٹسٹ میں75 اسکور کرتا ہے؛ اس کی دماغی عمر ہوگی _____

A.12
A.12
A.12

B.8
B.8
B.8

C.14
C.14
C.14

D.15
D.15
D.15

Answer: B.8
B.8
B.8

96 S ही R ची नात आहे. P हा R चे एकमेव मूल आहे. P हा N चा वडील आहे आणि N हा T चा भाऊ आहे. मग P आणि R यांचे नाते काय?

S is the granddaughter of R. P is the only child of R.P is the father of N and N is the brother of T. How is P related to R?

R, S کی پوتی ہے. R, P کا واحد بچھ ہے . N, P کا باپ ہے اور T, N کا بھائی ہے. P کا R سے کیا رشتہ ہے؟

A.भाऊ
A.Brother
A.بھائی

B.आजोबा
B.Grand-father
B.دادا

C.वडील
C.Father
C.باپ

D.मुलगा
D.Son
D.بیٹا

Answer: D.मुलगा
D.Son
D.بیٹا

97 मध एक आहे:

Honey is :

-ہے ----- شہد ایک

For More Info And Videos About TAIT-Exam Syllabus And Other Exam Visit My Channel
TAIT च्या 30 प्रश्नपत्रिका PDF
BADSHAHimp Available Request 9765226781
WWW.YouTube.com/BADSHAHimp
Subscribe My Channel

A.अल्कधर्मी
A.Alkaline
A.الکلائن

B.आम्लीय
B.Acidic
B.ایسڈک

C.अपक्ष
C.Neutral
C.نیوٹرل

D.काही दिवसांनंतर अल्कधर्मी
D.Basic after some days
D.کچھ دنوں کے بعد بنیادی

Answer:

B.आम्लीय
B.Acidic
B.ایسڈک

98 खालील शब्दांची चढत्या क्रमाने मांडणी करून खाली दिलेल्या प्रतिसादांमधून कोणता अर्थपूर्ण क्रम असेल?

1. मायक्रोसेकंद
2. मिनिट
4. पंधरवडा
3. नॅनोसेकंद
5. सेकंद

Which one of the given responses would be a meaningful order of the following words in an ascending order?

1. Microsecond
2. Minute
4. Fortnight
3. Nanosecond
5. Second

چڑھتی ہوئی ترتیب میں دیےگیے جوابات میں سے کونسا ایک مندرجہ ذیل الفاظ کی معنی خیز ترتیب ہوگی؟

1. مائیکروسافٹ
2. منٹ
4. ہلکے رات
3. نینوسیک
5. دوسرا

A.1, 3, 5, 2, 4
A.1, 3, 5, 2, 4
A.1, 3, 5, 2, 4

B.3, 1, 2, 5, 4
B.3, 1, 2, 5, 4
B.3, 1, 2, 5, 4

C.3, 1, 5, 2, 4
C.3, 1, 5, 2, 4
C.3, 1, 5, 2, 4

D.1, 3, 2, 5, 4
D.1, 3, 2, 5, 4
D.1, 3, 2, 5, 4

Answer: C.3, 1, 5, 2, 4
C.3, 1, 5, 2, 4
C.3, 1, 5, 2, 4

99 कथकली एक प्रकार आहे

Kathakali is a kind of

کتھاکلی ایک قسم ہے

A.नृत्य नाटक
A.Dance-drama
A.ناچ ڈراما کی

B.शास्त्रीय नृत्य
B.Classical dance
B.کلاسیکل ڈانس

C.नाटक
C.Drama
C.ڈراما

D.भावनात्मक नृत्य
D.Emotional dance
D.اموشنل ڈانس

Answer: A.नृत्य नाटक
A.Dance-drama
A.ناچ ڈراما کی

For More Info And Videos About TAIT-Exam Syllabus And Other Exam Visit My Channel
TAIT च्या 30 प्रश्नपत्रिका PDF
BADSHAHimp Available Request 9765226781
WWW.YouTube.com/BADSHAHimp
Subscribe My Channel

100 समद्विभुज त्रिकोणाचा पाया 8 सेंमी आहे आणि प्रत्येक सारखी बाजू ही 5 सेंमी आहे - या त्रिकोणाचे क्षेत्रफळ काय असेल

The base of an isosceles triangle is 8 cm and each of the equal side is 5 cm- The area of the triangle is

ایک متساوی الساقین مثلث کی تلی 8 سینٹی میٹر ہے اور ہر برابر طرف 5 سینٹی میٹر ۔ مثلث کا رقبہ ہے

A.6 cm^2
A.6 cm^2
A.6مربع سینٹی میٹر

B.12 cm^2
B.12 cm^2
B.12مربع سینٹی میٹر

C.13 cm^2
C.13 cm^2
C.13مربع سینٹی میٹر

D.14 cm^2
D.14 cm^2
D.14مربع سینٹی میٹر

Answer: B.12 cm^2
B.12 cm^2
B.12مربع سینٹی میٹر

101 Out of the given four words only one is not spelt correctly. Find the word that is not correctly spelt.

A.Cemetary

B.Mortgage

C.Department

D.Development

Answer: A.Cemetary

102 ‘जाचक’ या शब्दाचा विरुद्धार्थी शब्द कोणता ?

A.जाचणारा

B.छळणारा

C.त्रासदायक

	D.सुखकारक
Answer:	D.सुखकारक

103	$\sqrt{576} \div (4)^2 \times 7.4 + (7)^3 - 231 = ?$
	A. 123.9
	B. 121.1
	C. 111.4
	D. 123.1
Answer:	D. 123.1

104

विधान:
जेथे कुपोषण समस्या आहे तिथे शाळेतील मुले मध्यान्ह भोजन योजनेत जंक फूडचा समावेश करू इच्छितात.

कृतीचा कोर्स:
I. जंक फूड योजनेमध्ये समाविष्ट केले जावे.
II. जंक फूड योजनेमध्ये समाविष्ट करू नये.

Statement:
School children want to include junk food in midday meal scheme in the area where malnutrition is an issue.

Course of actions:
I. Junk food should be included in the scheme.
II. Junk food should not be included in the scheme

بیان:
ان علاقوں میں جہاں غذائیت کی کمی ایک مسئلہ ہے، اسکول کے بچے دن کے کھانے کی اسکیم میں جنک فوڈ شامل کرنا چاہتے ہیں۔

لائحہ عمل:
I۔اسکیم میں جنک فوڈ شامل ہونی چاہیے۔
II۔ اسکیم میں جنک فوڈ شامل نہیں ہونی چاہیے ۔

A.फक्त I अनुसरून आहे
A.Only I follows
A. صرف I لاگو ہو گا۔

For More Info And Videos About TAIT-Exam Syllabus And Other Exam Visit My Channel
TAIT च्या 30 प्रश्नपत्रिका PDF
BADSHAHimp Available Request 9765226781
YouTube WWW.YouTube.com/BADSHAHimp
Subscribe My Channel

B.फक्त II अनुसरण करते आहे
B.Only II follows
B. صرف II لاگو ہو گا۔

C.एकतर I किंवा II अनुसरून आहे
C.Either I or II follows
C. I یا II میں سے ایک لاگو ہو گا۔

D.I किंवा II दोन्हीपैकी काहीही अनुसरण करत नाही
D.Neither I nor II follows
D. I اور II میں سے کوئی بھی لاگو نہیں ہو گا۔

Answer: B.फक्त II अनुसरण करते आहे
B.Only II follows
B. صرف II لاگو ہو گا۔

105 **सूचना:** खालील प्रश्नात, दिलेल्या पर्यायांमधून नातेसंबंध सांगणारी आकृती निवडा.

DIRECTIONS: In the question below, select the related figure from the given alternatives.

ہدایات: نیچے دیئے گئے سوال میں، دیئے گئے متبادلات میں سے متعلق متبادل چنئے۔

Question Figures

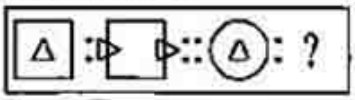

Answer Figures

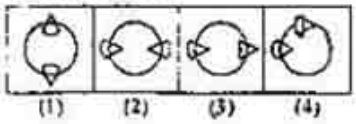

A. 1

B. 2

C. 3

D. 4

Answer: C. 3

106 माणिक सरकार हे _____चे मुख्यमंत्री आहेत

Manik Sarkar is the Chief Minister of-

مانک سرکار وزیر اعلی ہیں :

For More Info And Videos About TAIT-Exam Syllabus And Other Exam Visit My Channel
TAIT च्या 30 प्रश्नपत्रिका PDF
BADSHAHimp Available Request 9765226781
WWW.YouTube.com/BADSHAHimp
Subscribe My Channel

A.आसाम
A.Assam
A.آسام کے

B.पश्चिम बंगाल
B.West Bengal
B.مغربی بنگال کے

C.सिक्कीम
C.Sikkim
C.سکم کے

D.त्रिपुरा
D.Tripura
D.ترپورہ کے

Answer: D.त्रिपुरा
D.Tripura
D.ترپورہ کے

107 एका मुलीकडे बोट दाखवून, दिव्या म्हणते, “ती माझ्या वडीलांच्या वडिलांच्या एकुलत्या मुलाची मुलगी आहे”. मग त्या मुलीचे दिव्यासोबत नाते काय?

Pointing towards a girl, Divya says, “She is daughter of only son of my father’s father”. How the girl is related to Divya?

لڑکی کی طرف اشارہ کرکے، دویا نے کہا،" یے میرے باپ کے باپ کے واحد بیٹے کی بیٹی ہے". لڑکی کا دویا سے کیا رشتہ تھا؟

A.भाऊ
A.Brother
A.بھائی

B.चुलत बहीण
B.Cousin
B.چچی زاد

C.काकू
C.Aunt
C.چا چی

D.बहीण
D.Sister
D.بہن

Answer: D.बहीण
D.Sister
D.بہن

108 तीन संख्या 3:4:5 या गुणोत्तरामध्ये आहेत आणि त्यांचा लसावी 2400 आहे. त्यांचा मसावी?

Three numbers are in the ratio of 3:4:5 and their L.C.M. is 2400. Their H.C.F. is?

تین نمبر 5: 4: 3 کے تناسب میں ہیں اور ان کے ایل سی ایم 2400 ہے۔ ان کے ایچ سی.ایف کیا ہے؟

A.40
A.40
A.40

B.60
B.60
B.60

C.80
C.80
C.80

D.120
D.120
D.120

Answer: A.40
A.40
A.40

109 दिलेल्या शब्दापासून खालील शब्दांपैकी कोणते शब्द तयार केले जाऊ शकत नाहीत?
ESTABLISHMENT

Which of the following words cannot be formed from the given word?
ESTABLISHMENT

دیےگیے لفظ سے مندرجہ ذیل الفاظ میں سے کونسا نہیں بنایا جاسکتا ہے؟
‘ESTABLISHMENT’

A.TABLE
A.TABLE
A.TABLE

B.BLUNT
B.BLUNT
B.BLUNT

C.TENTS
C.TENTS
C.TENT

D.STATE
D.STATE
D.STATE

Answer: B.BLUNT
B.BLUNT
B.BLUNT

110 खालील आकृतीमध्ये किती आयत आहेत?

How many rectangles are there in the figure given below?

نیچے دی ہوئی شکل میں کتنی مستطیل ہیں؟

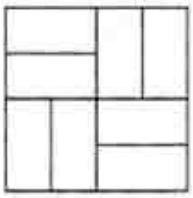

A. 24

B. 17

C. 22

D 14

Answer: B. 17

111 निर्देश: खालील शब्दांची इंग्रजी शब्दकोशानुसार मांडणी करा.
(1) Good
(2) Great
(3) Groom
(4) Gram
(5) Graceful

DIRECTIONS: Arrange the following words according to the English dictionary.
(1) Good
(2) Great
(3) Groom
(4) Gram
(5) Graceful

ہدایت: انگریزی لغت کے مطابق مندرجہ ذیل الفاظ کو مرتب کریں۔
(1) Good
(2) Great
(3) Groom
(4) Gram
(5) Graceful

A.1, 2, 4, 5, 3
A.1, 2, 4, 5, 3
A.1, 2, 4, 5, 3

B.2, 1, 5, 4, 3
B.2, 1, 5, 4, 3
B.2, 1, 5, 4, 3

C.1, 5, 4, 2, 3
C.1, 5, 4, 2, 3
C.1, 5, 4, 2, 3

D.2, 5, 4, 1, 3
D.2, 5, 4, 1, 3
D.2, 5, 4, 1, 3

Answer: C.1, 5, 4, 2, 3
C.1, 5, 4, 2, 3
C.1, 5, 4, 2, 3

112 सूचना: खाली दिलेल्या विधान (A) आणि कारण (R) साठी, खालील पैकी योग्य पर्याय निवडा:

विधान (A): औरंगजेबाने इंग्रजांना पराभूत केले.
कारण (R): औरंगजेब विरुद्ध ब्रिटिशांनी युद्ध घोषित केले.

DIRECTION: For the Assertion (A) and Reason (R) given below, choose the correct alternative from the following:

Assertion (A): British were defeated badly by Aurangzeb.
Reason (R): British declared war against Aurangzeb.

ہدایت: نیچے دئیے گئے اسرشن (A) اور وجہ (R) کے لئے، مندرجہ ذیل میں سے صحیح متبادل منتخب کریں:

اسرشن (A): اورنگزیب کے ذریعہ برطانیوں کو بری طرح شکست دی گئی۔
وجہ (R): برطانیوں نے اورنگزیب کے خلاف جنگ کا اعلان کیا۔

A.दोन्ही (A) आणि (R) सत्य आहेत आणि (R) (A) च योग्य स्पष्टीकरण आहे.
A.Both (A) and (R) are true and (R) is the correct explanation of (A)
A. (A) اور (R) دونوں صحیح ہیں اور (R) (A) کی درست وضاحت ہے

B.दोन्ही (A) आणि (R) खरे आहेत, परंतु (R) (A) च योग्य स्पष्टीकरण नाही
B.Both (A) and (R) are true, but (R) is not the correct explanation of (A)
B. (A) اور (R) دونوں صحیح ہیں، لیکن (R) (A) کی درست وضاحت نہیں ہے

C. (A) सत्य आहे, परंतु (R) खोटे आहे
C.(A) is true, but (R) is false
C. (A) صحیح ہے، لیکن (R) غلط ہے

D.(A) खोटे आहे, परंतु (R) सत्य आहे
D.(A) is false, but (R) is true
D. (A) غلط ہے، لیکن (R) صحیح ہے

Answer: A.दोन्ही (A) आणि (R) सत्य आहेत आणि (R) (A) च योग्य स्पष्टीकरण आहे.
A.Both (A) and (R) are true and (R) is the correct explanation of (A)
A. (A) اور (R) دونوں صحیح ہیں اور (R) (A) کی درست وضاحت ہے

113 सूचना: अर्थपूर्ण परिच्छेद निर्माण करण्यासाठी, खाली दिलेली (P), (Q) (R), (S) आणि (T) ही पाच वाक्ये योग्य अनुक्रमाने पुनर्रचना करा; त्यांनतर खालील प्रश्नांची उत्तर द्या.

P. गाढ झोपलेला ससा जागा झाला आणि हळूहळू चालणाऱ्या कासवाने शर्यतीत हरविल्याचा त्याला मोठा धक्का बसला.
Q. ससा लवकरच कंटाळला आणि कासव पोहचेपर्यंत पुष्कळ वेळ आहे, असा विचार करून सशाने विश्रांती घ्यायचे ठरविले.
R. अति आत्मविश्वास असणारा ससा आव्हान स्वीकारतो आणि शर्यत सुरु झाल्याबरोबर खूप वेगाने धावतो.
S. दरम्यान, अंतिम रेषेपर्यंत पोहचत नाही तोपर्यंत कासव हळूहळू चालत राहते.
T. ससा वेगाने धावण्याच्या फुशारक्या मारत असल्याने कासवाने त्याला शर्यत लावण्याचे आव्हान दिले.

पुनर्रचना केल्यानंतर खालीलपैकी कोणते वाक्य पहिले असेल?

DIRECTION: Rearrange the following five sentences (P), (Q), (R), (S) and (T) in the proper sequence to form a meaningful paragraph; then answer the questions given below them.
P. The overslept hare wakes up, only to be shocked that a slow moving tortoise beat it in the race.
Q. Soon it gets tired and decides to rest, thinking that there's plenty of time to relax before tortoise can catch up with it.
R. The overconfident hare accepts the challenge and runs as fast as it can after the race begins.
S. Meanwhile, the tortoise continues to walk slowly, until it reaches the finish line.
T. Tired of the bragging of a speedy hare, a tortoise challenges it to a race.

Which of the following should be the FIRST sentence after rearrangement?

ہدایات: ان پانچ جملوں (P)، (Q)، (R)، (S) اور (T) کو با معنی پیرا بنانے کے لئے دوبارہ ترتیب دیجئے، پھر نیچے دے گئے سوالوں کے جواب دیجئے

P. دیر تک سونے والا خرگوش جاگ گیا، خالی حیران ہونے کے لئے کی دھیرے چلنے والے کچھوے نے اسے دھوڈ میں ہرا دیا.
Q. جلدی وو تھک گیا اور آرام کرنے کہ ارادہ کیا، یہ سونچ کر کی ابھی آرام کرنے کے لئے بہت وقت ہے اسے پہلے کہ کچھوا اس تک پہنچ جاےگا.
R. ضرورت سے زیادہ بھروسا رکھنے والے خرگوش نے مقابلہ کی دعوت تسلیم کی اور دھوڈ شرو ہونے سے ہی تیز بھاگ گیا.
S. جبکہ ، کچھوا دھیرے چلنے لگا، جب تک وو منزل تک پہنچ گیا.
T. تیز چلنے والے خرگوش کی رفتار سے تنگ آکر، کچھوے نے اسے دھوڈ لگانے کی دعوت دی.

دوبارہ ترییب دینے کے بعد کون سا جملہ پہلے ہونا چاہیے؟

A.T
A.T
A.T

B.P
B.P
B.P

C.Q
C.Q
C.Q

D.S
D.S
D.S

Answer: A.T
A.T
A.T

114 29 मुलांच्या रांगेत रोहित डावीकडून सतराव्या क्रमांकावर आणि त्याच रांगेत करण उजवीकडून 17 व्या क्रमांकावर आहे. तर रांगेत त्यांच्यामध्ये किती मुले आहेत ?

Rohit is seventeenth from the left end of a row of 29 boys and Karan is seventeenth from the right end in the same row. How many boys are there between them in the row ?

29 لڑکوں کی کتار میں روہت کتار کے بھانیں چھور سے سترہ ہے اور کرن اسی کتار میں دھانیں چھور سے ستارہ ہے. کتار میں ان دونوں کے درمیان کتنے لڑکے ہے؟

A.3
A.3
A.3

B.5
B.5
B.5

C.6
C.6
C.6

D.यापैकी नाही
D.None of these
D.ان میں سے کوئی نہیں

Answer: A.3
A.3
A.3

115 **सूचना**: खालील प्रश्नात एकाच फाशाच्या चार अवस्था दाखविल्या आहेत. प्रश्नात विचारलेल्या चिन्हाच्या विरुद्ध बाजूला कोणते चिन्ह असेल?

DIRECTIONS: In the following questions four positions of the same dice are shown. Select the symbol opposite to the symbol as asked in the question.

ہدایات: نیچے کے سوالوں میں، ایک ہی پاسہ کی چار حالتیں دکھائی گئی ہیں اس علامت کو چنئے جو سوال میں پوچھی گئی علامت کے سامنے ہے.

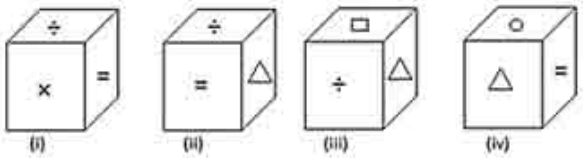

△ या चिन्हाच्या विरुद्ध बाजूला कोणते चिन्ह असेल?

Which symbol will be opposite to symbol △ ?

کونسا نشان △ نشان کی ضد ہوگی؟

A. o

B. =

C. ×

D. Δ

Answer: C. ×

116 खालीलपैकी शुद्ध वाक्य कोणते ?

A.आपल्या नेहमीच्या सवयीला मान खाली घालून ऐकत होतो.

B.आपल्या नेहमीच सवयीला मान खाली घालून ऐकत होतो.

C.आपल्या नेहमीच्या सवयीत मान खाली घालून ऐकत होतो.

D.आपल्या नेहमीच्या सवयीने मान खाली घालून ऐकत होतो.

Answer: D.आपल्या नेहमीच्या सवयीने मान खाली घालून ऐकत होतो.

117 9 व 1 चा भौमितिक मध्य आहे:

The geometric mean of 9 and 1 is:

اور 1 کا جیومیٹری اوسط ہے9

A.3
A.3
A.3

B.2
B.2
B.2

C.4
C.4
C.4

D.8
D.8
D.8

Answer: A.3
A.3
A.3

118 ‘हटवादी’ या शब्दाचा समानार्थी शब्द कोणता ?

A.सुज्ञ

B.हेकेखोर

C.विचारी

D.समंजस

Answer: B.हेकेखोर

119 साधारणत्या जर आपले हस्तलेखन चांगले आहे तर ब्लॅक बोर्ड वर हि आपले लेखन

If you have good hand in routine conditions then it can be assumed that your black-board hand writing should be—

اگر آپ کو معمول کے حالات میں اچھا ہاتھ ہے تو یہ فرض کیا جاسکتا ہے کہ آپ کی تختہ سیاہ کی لکھائی ہونی چاہئے—

A.चांगले
A.Good
A.اچھی

B.मध्यमान
B.Average
B.اوسط

C.खराब
C.Poor
C.بری

D.काही म्हणू शकत नाही
D.Can’t say
D.نہیں کہہ سکتا

Answer: D.काही म्हणू शकत नाही
D.Can’t say
D.نہیں کہہ سکتا

120 रेल्वे इंजनात कोणते इंधन वापरले जाते?

Which fuel is used in the rail engines?

کون سا ایندھن ریل کے انجن میں استعمال کیا جاتا ہے؟

A.पेट्रोल
A.Petroleum
A. پیٹرولیم

B.डिझल
B.Diesel
B. ڈیزل

C.नैसर्गिक गॅस
C.Natural gas
C. قدرتی گیس

D.वरीलपैकी एकही नाही
D.None of the above
D. مندرجہ بالا میں سے کوئی بھی نہیں

Answer: B.डिझल
B.Diesel
B. ڈیزل

121 निर्देश: दिलेल्या अंक मालिकेतील चुकीची संज्ञा शोधा:

12, 11, 18, 45, 196, 795, 4734

DIRECTIONS: Find the wrong term in the given number series:

12, 11, 18, 45, 196, 795, 4734

ہدایت دے گئے نمبرس سرج مے غلط نمبر کھوجے

12, 11, 18, 45, 196, 795, 4734

A.795
A.795
A.795

B.196
B.196
B.196

C.45
C.45
C.45

D.18
D.18
D.18

Answer: B.196
B.196
B.196

122 दोन मित्र टॉम आणि जेरी हे 12.5 किमी दूर आहेत. जर त्यांनी विरुध्द दिशेमध्ये प्रवास केला तर ते अर्ध्यातासानंतर एकमेकांना भेटतात आणि जर त्यांनी सारख्या दिशेमध्ये प्रवास केला तर ते 2.5 तासांनंतर एकमेकांना भेटतात. जर जेरी जलद गतीने प्रवास करत असेल तर त्याची गती काढा?

Two friends Tom and Jerry are 12.5 km apart. If they travel in the opposite direction they meet each other after half an hour and if they travel in the same direction they meet after 2.5 hours. If jerry travels faster what is his speed?

دو دوست ٹام اور جیری 12.5 کلو میٹر دور ہیں۔ اگر وہ مخالف سمت میں سفر کرتے ہیں تو آدھے گھنٹہ کے بعد ایک دوسرے سے ملاقات کرتے ہیں اور اگر وہ اسی سمت میں سفر کرتے ہیں تو وہ 2.5 گھنٹے بعد مل جاتے ہیں۔ اگر جیری تیزی سے سفر کرے تو اس کی رفتار کیا ہے؟

A.15 किमी/तास
A.15 kmph
A.15 کلو میٹر فی گھنٹہ

B.13 किमी/तास
B.13 kmph
B.13 کلو میٹر فی گھنٹہ

C.25 किमी/तास
C.25 kmph
C.25 کلو میٹر فی گھنٹہ

D.निश्चित करता येत नाही
D.Can't be determined
D.معلوم نہیں ہو سکتا

Answer: A.15 किमी/तास
A.15 kmph
A.15 کلو میٹر فی گھنٹہ

123 **सूचना:** खालील प्रश्नात कागदाच्या एक तुकड्याला प्रश्नातील आकृतीत दाखविल्याप्रमाणे घडी घातली आहे. उत्तरादाखल पर्यायांमधून अशी आकृती निवडा जी भोक पडल्यानंतर उलगडलेल्या कागदाचे स्वरूप दाखवेल

DIRECTIONS: In the following question a piece of paper is folded in the manner shown in the question figure(s). Select the figure out of the answer choices showing the unfolded pattern after the punches (cut).

ہدایات: نیچے دیئے گئے سوالوں میں کاغذ کا ایک ٹکڑا اس طرح جوڑا گیا ہے جیسے سوال کی شکل میں بتایا گیا ہے، دیئے گئے جوابات کے اختیارات میں سے اس طرح انتخاب کیجیئے کہ کٹ لگانے کے بعد بغیر جوڑا ہوا پیٹرن دکھائی دے۔

Question Figures

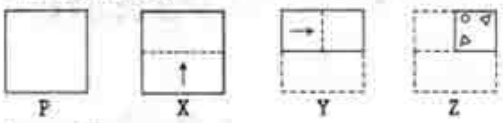

Answer Figures

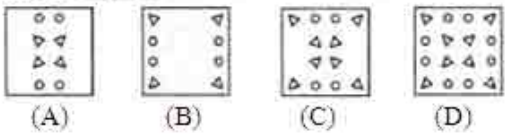

A. (A)

B. (B)

C. (C)

D. (D)

Answer: C. (C)

124	प्रश्नासाठी सूचना: खालील मालिका पूर्ण करा. QM, RO, SQ, TS, _____ DIRECTION: Complete the following series. QM, RO, SQ, TS, _____ سوال کے لیے ہدایت:مندرجہ ذیل سیریز کو مکمل کریں۔ QM, RO, SQ, TS, _____
	A.AE A.AE A.AE
	B.JA B.JA B.JA
	C.TU C.TU C.TU
	D.UU D.UU D.UU
Answer:	D.UU D.UU D.UU

125 सूचना: खालील दिलेल्या प्रश्नांची उत्तरे देण्यासाठी खालील माहितीचा अभ्यास करा.
12 लोक प्रत्येकी सहा लोक असलेल्या दोन समांतर रांगेमध्ये बसले आहेत, अशा प्रकारे बसलेले आहेत की लगतच्या व्यक्तींमधे समान अंतर आहे. रांग 1 मध्ये, P, Q, R, S, T आणि V बसलेले आहेत आणि ते सर्व दक्षिणेकडे बघत आहेत. रांग 2 मध्ये, A, B, C, D, E आणि F बसलेले आहेत आणि ते सर्व उत्तरेकडे बघत आहेत. म्हणून, दिलेल्या आसन व्यवस्थेत, रांगेत बसलेला प्रत्येक सदस्य दुसऱ्या रांगेत बसलेल्या सदस्याच्या समोरासमोर आहे.
A हा D च्या उजवीकडून तिसऱ्या जागेवर बसतो. A किंवा D दोघांपैकी कोणीही टोकाच्या शेवटी बसत नाही. T हा D च्या समोर आहे. V हा A च्या सामोर नाही आणि V कोणत्याही शेवटच्या टोकाशी बसलेला नाही. V हा T चा तात्काळ शेजारी नाही. B सर्वात शेवटच्या टोकावर बसतो. B आणि E च्या मध्ये फक्त दोन लोक बसतात. E हा V च्या सामोर नाही. दोन व्यक्ती R आणि Q च्या मध्ये बसतात. R हा T चा तत्काळ शेजारी नाही. C हा V च्या सामोर नाही. P हा R चा तत्काळ शेजारी नाही.
खालील पैकी कोणाचे तोंड A कडे आहे?

DIRECTIONS: Study following information to answer the given questions given below it.
Twelve people are sitting in two parallel rows containing six people each, in such a way that there is an equal distance between adjacent persons. In row 1, P, Q, R, S, T and V are seated and all of them are facing South. In row 2, A, B, C, D, E and F are seated and all of them are facing North. Therefore, in the given seating arrangement, each member seated in a' row faces another member of the other row.
A sits third to right of D. Neither A nor D sits at extreme ends. T faces D. V does not face A and V does not sit at any of the extreme ends. V is not an immediate neighbour of T. B sits at one of the extreme ends. Only two people sit between B and E. E does not face V. Two persons sit between R and Q. R is not an immediate neighbour of T. C does not face V. P is not an immediate neighbour of R.
Who amongst the following faces A?

ہدایات: نیچے دیے گئے سوالوں کے جواب دینے کے لیے مندرجہ ذیل معلومات کا مطالعہ کریں۔
بارہ لوگ دو متوازی قطار میں بیٹھے ہیں جس میں ہر ایک میں چھ لوگ شامل ہیں، اس طرح سے کہ قریبی افراد کے درمیان ایک مساوی فاصلہ ہے۔ قطار 1 میں P، Q، R، S، T اور V بیٹھے ہیں اور ان میں سے ہر ایک کا رخ جنوب کی طرف ہے۔ قطار 2 میں A، B، C، D، E اور F بیٹھے ہیں اور ان میں سے ہر ایک کا رخ شمال کی طرف ہے۔ لہذا، دیے گئے بیٹھنے کے انتظام میں، ایک قطار میں بیٹھا ہوا ہر ممبر دوسری قطار کے دوسرے ممبر کے سامنے ہے۔
A کا رخ V کی طرف ہے۔ D کا رخ T انتہائی کناروں پر بیٹھے ہیں۔ D نہ ہی A کے دائیں سے تیسری جگہ بیٹھا ہے۔ نہ تو A، D اور B ایک انتہائی سرے پر بیٹھا ہے۔ B کا فوری پڑوسی نہیں ہے۔ V، T کسی بھی انتہائی کنارے پر نہیں بیٹھا ہے۔ V طرف نہیں ہے اور E کا فوری پڑوسی T، R کے درمیان دو لوگ بیٹھے ہیں۔ Q اور R کی طرف نہیں ہے۔ V کا رخ E کے درمیان صرف دو لوگ بیٹھے ہیں۔ P، R کا فوری پڑوسی نہیں ہے۔ V کا رخ C کی طرف نہیں ہے۔
مندرجہ ذیل میں سے کون A کے سامنے ہے؟

A.R
A.R
A.R

B.T
B.T
B.T

C.P
C.P
C.P

D.S
D.S
D.S

Answer: D.S
D.S
D.S

126 निर्देश: पुढील प्रश्नांपैकी प्रत्येक प्रश्नात एक संख्या गहाळ आहे. मालिकेचा नमुना समजून घ्या आणि योग्य संख्या निवडा.

4, 7, 12, ... , 28, 39

DIRECTION: In each of the following questions, one number is missing in the series. You have to understand the pattern of the series and insert the number.

4, 7, 12, ... , 28, 39

ہدایت جیل کے ہر سوال میں سرج کا ایک نمبر گمشدہ ہے . آپکو اس سرج کو سمجھنا ہے. اور گمشدہ نمبر کو یہا کھوجنا ہے

4, 7, 12, ... , 28, 39

A.19
A.19
A.19

B.24
B.24
B.24

C.14
C.14
C.14

D.16
D.16
D.16

Answer: A.19
A.19
A.19

127 सूचना: खालील प्रश्नांमध्ये दिलेल्या पर्यायांमधून संबंधित अक्षर/शब्द/संख्या निवडा.

11 : 119 :: 15 : ?

DIRECTIONS: In the following question, select the related letter/word/number from the given alternatives.

11 : 119 :: 15 : ?

سمت: مندرجہ ذیل سوال میں، دیے گئے متبادل سے متعلقہ حرف/لفظ/نمبر منتخب کریں۔

11 : 119 :: 15 : ?

A.154
A.154
A.154

B.223
B.223
B.223

C.233
C.233
C.233

D.152
D.152
D.152

Answer: B.223
B.223
B.223

128 सूचना : खालील प्रत्येक प्रश्नात दोन विधाने I आणि II दिलेले आहेत. हे विधान एकतर स्वतंत्र कारण असू शकतात किंवा स्वतंत्र कारणांचे परिणाम असू शकतात. यांपैकी एक विधान इतर विधानाचा परिणाम असू शकतो. दोन्ही विधाने वाचा आणि खालीलपैकी कोणत्या उत्तराचा पर्याय या दोन्ही विधानांमधील संबंधांचे वर्णन करतो ते ठरवा.

विधान :
I. तरुण पिढीची मुले त्यांच्या अभ्यासात चांगले काम करतात.
II. मुलांचे पालक आता शिक्षणाचे महत्त्व खूप चांगल्या प्रकारे समजतात.

DIRECTIONS: Below in each question are given two statements I and II. These statements may be either independent causes or may be effects of independent causes. One of these statements may be the effect of the other statement. Read both the statements and decide which of the following answer choice correctly depicts the relationship between these two statements.

Statements:
I. The children of younger generation do better in their studies.
II. The parents of children now realise the importance of education very well.

ہدایات: نیچے ہر سوال میں دو بیانات I اور II آ تو یہ بیانات یا تو آزاد وجوہات کے اثرات ہو سکتے ہیں۔ ان دیے گئے ہیں۔ بیانات میں سے ایک بیان دوسرے کا اثر ہو سکتا ہے۔دونوں بیانات پڑھیں اور فیصلہ کریں کہ نیچے دیے گئے کس جواب کا انتخاب ان دونوں بیانات کے در میان تعلق کو ٹھیک سے ظاہر کرتا ہے۔

بیانات:
I – نئی نسل کے بچے اپنی تعلیم میں زیادہ بہتر ہیں۔
II ۔ اب بچوں کے والدین تعلیم کی اہمیت کو بہت اچھی طرح سمجھتے ہیں۔

A.I हा परिणाम आहे आणि II हे त्याचे तात्काळ आणि प्रमुख कारण आहे;
A.I is effect and II is its immediate and principal cause;
A. بیان نمبر I اس کی فوری اور بنیادی وجہ ہے۔ II اثر ہے اور بیان نمبر

B.I हे तात्काळ आणि प्रमुख कारण आहे आणि II हा त्याचा परिणाम आहे;
B.I is the immediate and principal cause and II its effect;
B. بیان نمبر I فوری اور بنیادی وجہ ہے اور بیان نمبر II اس کا اثر ہے۔

C.I हा परिणाम आहे परंतु II हे त्याचे तात्काळ आणि प्रमुख कारण नाही;
C.I is an effect but II is not its immediate and principal cause;
C. بیان نمبر I اس کی فوری اور بنیادی وجہ نہیں ہے۔ II اثر ہے لیکن بیان نمبر

D.II हा परिणाम आहे परंतु I हे त्याचे तात्काळ आणि प्रमुख कारण नाही;
D.II is an effect but I is not its immediate and principal cause;
D. بیان نمبر II اس کی فوری اور بنیادی وجہ نہیں ہے۔ I اثر ہے لیکن بیان نمبر

Answer: D.II हा परिणाम आहे परंतु I हे त्याचे तात्काळ आणि प्रमुख कारण नाही;
D.II is an effect but I is not its immediate and principal cause;
D. بیان نمبر II اس کی فوری اور بنیادی وجہ نہیں ہے۔ I اثر ہے لیکن بیان نمبر

129	Out of the given four words only one is spelt correctly. Find the word that is correctly spelt.
	A.Committee
	B.Curiousity
	C.Hankercheif
	D.Playyright
Answer:	A.Committee

130	अशा मानसिक रोगाने ग्रस्त असल्याचे _____ प्रकार आहेत. There are about _____ types of schizophrenic ہیں تقریبا قسم کے سچزوفرنک
	A.5 A.5 A.5
	B.6 B.6 B.6
	C.4 C.4 C.4
	D.8 D.8 D.8
Answer:	A.5 A.5 A.5

131	DIRECTIONS: A sentence with an underlined word is given below. Find the word which is opposite in meaning to the underlined word from the given options. This dictionary <u>includes</u> both British and American spellings of words.
	A.Excludes
	B.Comprises

C.Contains

D.Consists

Answer: A.Excludes

132

सूचना: खालील प्रश्नात उत्तरातील पर्यायांपैकी कोणत्या पर्यायी आकृतीत प्रश्नातील आकृती अंतर्भूत आहे?

DIRECTIONS: In the given question find the answer figure in which question figure is embedded.

ہدایات: دیئے گئے سوال میں جواب والی شکل دریافت کیجیئے جس میں سوال والی شکل سرایت کرگئی ہے۔

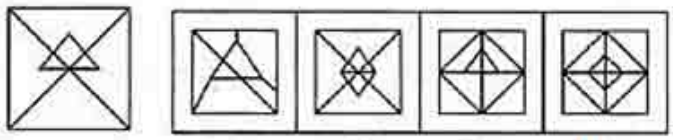

A. (A)

B. (B)

C. (C)

D. (D)

Answer: B. (B)

133

सूचनाः दिलेल्या पर्यायांमधून ऍनालॉगस शब्द निवडा.

ऑईस्टरचा संबंध बेडसोबत आहे जसा मोराचा संबंध ...सोबत आहे.

DIRECTIONS: Choose the analogous word from the given alternatives.

Oyster is to Bed as Peacock is to _____.

ہدایات: دیے گئے متبادل سے مطابق لفظ کا انتخاب کریں

کستُورا کا تعلق اگر فرش کے ساتھ ہے تو مور کا --------- کے ساتھ .

A.मस्टर
A.Muster
A. جایزہ

B.शिवर
B.Shiver
B. لرزہ

C.ड्रे
C.Dray
C. تھیلے

D.बेले
D.Bele
D. ناکہ بندی

Answer: A.मस्टर
A.Muster
A. جایزہ

134 **सूचना:** खालील प्रश्नात उत्तरातील पर्यायांपैकी कोणत्या पर्यायी आकृतीत प्रश्नातील आकृती अंतर्भूत आहे?

DIRECTIONS: In the given question find the answer figure in which question figure is embedded.

ہدایات: دیئے گئے سوال میں، جواب کی شکل کو دریافت کیجیئے جو سوال میں سرایت کر گئی ہے۔

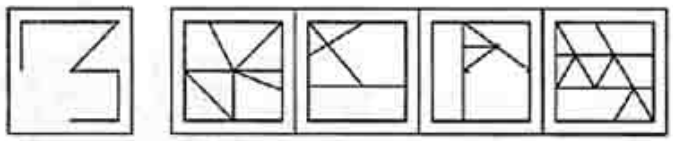

A. (A)

B. (B)

C. (C)

D. (D)

Answer: A. (A)

135 Choose the word which is most similar in meaning to the given word.
LETHAL

A.Deadly

B.Harmless

C.Safe

D.Benign

Answer: A.Deadly

136 जगभरात लाखो लोकांना जोडणाऱ्या संगणकांच्या विशाल नेटवर्कला म्हणतात ..... .

The vast network of computers that connects millions of people all over the world is called ……. .

کمپیوٹر کا عظیم نیٹ ورک جو دنیا بھر میں لاکھوں لوگوں کو ایک ساتھ جوڑتا ہے اس کو ..... کہا جاتا ہے۔

A.एल ए एन
A.LAN
A.لین

B.वेब
B.Web
B.ویب

C.हायपरटेक्स्ट
C.Hypertext
C.ہائپرٹیکسٹ

D.इंटरनेट
D.Internet
D.انٹرنیٹ

Answer: D.इंटरनेट
D.Internet
D.انٹرنیٹ

137 सूचना: दोन विधाने आणि त्यानंतर चार निष्कर्ष, I, II, III आणि IV दिले आहेत. ही विधाने सामान्यतः ज्ञात वस्तुस्थितीपेक्षा भिन्न असली तरी सत्य आहेत असे समजा. दिलेल्यापैकी कोणता निष्कर्ष दिलेल्या विधानांवरुन नक्की काढता येऊ शकतो हे तुम्ही ठरवायचे आहे.तुमचे उत्तर सूचित करा.
विधाने:
काही शिक्षक विद्यार्थी आहेत.
सर्व विद्यार्थी मुली आहेत.
निष्कर्ष:
I. सर्व शिक्षक मुली आहेत.
II. काही मुली शिक्षक आहेत.
III. काही मुली विद्यार्थी आहेत.
IV. सर्व विद्यार्थी शिक्षक आहेत.

DIRECTION: Two statements are given following by four conclusions, I, II, III and IV. You have to consider that statements to be true, even if they seem to be at variance from commonly known facts. You are to decide which of the given conclusions can definitely be drawn from the given statements. Indicate your answer.

Statements:
Some teachers are students.
All students are girls.

Conclusion:
I. All teachers are girls.
II. Some girls are teachers.
III. Some girls are students.
IV. All students are teachers.

ہدایات: دو سٹیٹمنٹ جوکہ چار خلاصوں پر مشتمل ہیں .I،II، III اور IV. اگرچہ دکہنے میں وہ بہت اپ کو وہ سٹیٹمنٹ درست ماننا ہے، سارے حقاٰق ست مطبقت رکہتی ہو۔ اپ کو دیے گے خلاصوں میں سے یقینی طور پر اسے اختیار کرنا ہے جو سٹیٹمنٹ سے نکلا ہو. اپنا جواب تلاش کرے.

اظہار بیان:
کچہ استاد طالبعلم ہیں
تمام طالبعلم لڑکیاں ہیں

نتائج:
Iتمام استاد لڑکیاں ہیں۔
IIکچہ لڑکیاں استاد ہیں۔
IIکچہ لڑکیاں طالبعلم ہیں۔
IVتمام طالبعلم استاد ہیں۔

A.केवळ I निष्कर्ष निघेल
A.Only I follows
A.صرف I درست ہے

B.केवळ I, II आणि III निष्कर्ष निघेल
B.Only I, II and III follow
B.صرف II، Iاور III درست ہے

C.केवळ II आणि III निष्कर्ष निघेल
C.Only II and III follow
C.صرف II اور III درست ہے

D.सर्व निष्कर्ष निघतील
D.All follow
D.سب درست ہیں

Answer: C.केवळ II आणि III निष्कर्ष निघेल
C.Only II and III follow
C.صرف II اور III درست ہے

138 अनुसूचित जातीचा विद्यार्थी आपल्या वर्गामध्ये दाखल झाला आहे. वर्गातले इतर विद्यार्थी त्याला अस्पृष्य मानतात आणि त्याला अलिप्त राहण्यास भाग पाडतात. आपण त्याचे वर्गात उत्तम समायोजन कसे कराल ?

A scheduled caste student is admitted in your class. His other classmates treat him as an untouchable and force him to live in isolation. How would you give him better adjustment in the class?

ایک طے کردہ ذات کے طالب علم کو آپ کی کلاس میں داخل کیا جاتا ہے.ان کے دوسرے ہم جماعت اسے ان چھوا قرار دیتے ہیں اور اس کو الگ تھلگ میں رہنے پر مجبور کرتے ہیں.آپ اسے کلاس میں بہتر ایڈجسٹمنٹ کیسے دیں گے؟

A.त्याच्या अभ्यासात मदत करून आणि वर्गातल्या दुसऱ्या मुलांवर कारवाई करून
A.By helping him with his studies and taking action against his classmates
A.اس کے مطالعہ کے ساتھ اس کی مدد کرنے اور اس کے ہم جماعتوں کے خلاف کارروائی کرکے

B.धर्मोपदेश देऊन
B.By preaching
B.تبلیغ کرتے ہوئے

C.कायदेशीर कारवाईचा भिती दाखवून
C.By showing fear of legal actions
C.قانونی کارروائی کے خوف کا ظاہر کرتے ہوئے

D.अनुसूचितांची दयनीय परिस्थितीचे समर्थन करून
D.By justifying the plight of down-trodden.
D.ڈراؤنڈ کے خوف کی توثیق کی طرف سے.

Answer: A.त्याच्या अभ्यासात मदत करून आणि वर्गातल्या दुसऱ्या मुलांवर कारवाई करून
A.By helping him with his studies and taking action against his classmates
A.اس کے مطالعہ کے ساتھ اس کی مدد کرنے اور اس کے ہم جماعتوں کے خلاف کارروائی کرکے

139 दोन प्रक्षेपीत तंत्र आहेत-

The two projective techniques are

دو پروجیکٹو تکنیک ہیں

A.TAT & RIT
A.TAT & RIT
A.TAT & RIT

B.GMAT & WAIS
B.GMAT & WAIS
B.GMAT & WAIS

C.TAT & GMAT
C.TAT & GMAT
C.TAT & GMAT

D.WAIS & CA
D.WAIS & CA
D.WAIS & CA

Answer:

A.TAT & RIT
A.TAT & RIT
A.TAT & RIT

140 शैक्षणिक मानसशास्त्राने संभाव्य शिक्षकांना सह ह्याचा पुरवठा केला पाहिजे –

Educational Psychology should provide prospective teachers with—

تعلیمی نفسیات کو لازمی طور پر اساتذہ فراہم کرنا چاہئے-

A.आधुनिक शिक्षणाच्या विविध पैलूंमधील अंतर्ज्ञान
A.Insights into the various aspects of modem education
A.جدید تعلیم کے مختلف پہلوؤں میں اندراج

B.प्रभावी शिक्षण दिले जावो ह्या साठी तत्त्वे, अंतर्ज्ञान आणि दृष्टिकोन
B.Principles, insights and attitudes as points of departure for effective teaching
B.مؤثر تدریس کے انعقاد کیلئے اصول، تصورات اور رویے

C. वर्तमान शिक्षण प्रक्रिया मूल्यांकन करण्यासाठी संशोधित कार्यपद्धती
C.Research procedures by means of which to evaluate current teaching procedure
C.موجودہ تدریس کے طریقہ کار کی تقویم کرنے کے تحقیقاتی طریقہ کار

D.वर्ग खोलीतील दररोज परिस्थितीशी निगडित करण्यासाठी सामान्य नियम
D.Rules of thumb to deal with everyday class-room situation
D.روزمرہ کلاس روم کی حالت سے نمٹنے کے لئے بنیادی قوانین

Answer: B.प्रभावी शिक्षण दिले जावो ह्या साठी तत्त्वे, अंतर्ज्ञान आणि दृष्टिकोन
B.Principles, insights and attitudes as points of departure for effective teaching
B.مؤثر تدریس کے انعقاد کیلئے اصول، تصورات اور رویے

141 **सूचना**: खालील आकृतीचे प्रतिबिंब शोधून काढा.

DIRECTIONS: Find the mirror image of the figure given below.

ہدایات: نیچے دیئے گئے شکل کی آئینہ معکوس شکل کیا ہوگی۔

मुख्य आकृती
Main Figure
اصل شکل

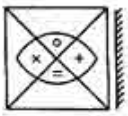

उत्तरासाठी पर्यायी आकृत्या
Answer Figure
جوابی شکل

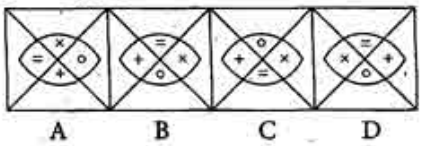

A. (A)

B. (B)

C. (C)

D. (D)

Answer: C. (C)

142 निर्देश: मालिका पूर्ण करा

A, F, ?, P

DIRECTION: Complete the series

A, F, ?, P

ہدایت اس سرج کو مکمّل کرو

A, F, ?, P

A.M
A.M
A.M

B.L
B.L
B.L

C.P
C.P
C.P

D.K
D.K
D.K

Answer: D.K
D.K
D.K

143 भारताच्या राष्ट्राध्यक्षाद्वारे राज्यसभेसाठी किती सदस्यांना नेमले जाते?

How many members are nominated by the President of India to the Rajya Sabha?

صدر کتنے افراد کو راجیہ سبھا کے لئے نامینیٹ کر سکتا ہے

A.2 सदस्य
A.2 members
A.2 ممبران

B.6 सदस्य
B.6 members
B.6 ممبران

C.10 सदस्य
C.10 members
C.10 ممبران

D.12 सदस्य
D.12 members
D.12 ممبران

Answer: D.12 सदस्य
D.12 members
D.12 ممبران

144 एक फर्मी म्हणजे :

One fermi is equal to:

ایک فرمی _____ کے برابر ہوتی ہے

A.10^{-9} मी
A.10^{-9} m
A.10^{-9} میٹر

B.10^{-15} मी
B.10^{-15} m
B.10^{-15} میٹر

C.10^{-18} मी
C.10^{-18} m
C.10^{-18} میٹر

D.10^{-12} मीमी
D.10^{-12} m
D.10^{-12} میٹر

Answer:

B.10^{-15} मी
B.10^{-15} m
B.10^{-15} میٹر

145 जर आपण शाळेचे मुख्य अधिकारी असाल तर कसे निर्णय घ्याल

If you are the chief-proctor of the school, the decisions will be taken on the ground—

اگر آپ اسکول کے سربراہ ہیں تو فیصلہ حقیقی بنیاد پر کیا جائے گا

A.समान गुन्हेगारी साठी समान शिक्षा
A.Equality of punishments for equal crimes
A.یکساں جرائم کے لئے مساوی سزائیں

B.शिक्षा ही केवळ त्यांच्यासाठीच आहे जे सहजपणे बंड करू शकत नाहीत
B.Punishments are only for those who cannot revolt easily
B.سزا صرف ان لوگوں کے لئے ہیں جو آسانی سے بغاوت نہیں کرسکتے ہیں

C.विद्यार्थी नेत्यांशी मैत्री आणि इतरांशी स्पर्धा
C.Be friendly with student leaders and rivalry with others
C.طالب علم کے رہنماؤں اور دوسروں کے ساتھ رقابت کے ساتھ دوستانہ تعلق ہو

D.आपल्या समितीनुसार गुन्हेगारीची गंभीरता मान्य कराल
D.As per your committee approves the seriousness of the crime.
D.آپ کی کمیٹی کی منظوری کے مطابق جرم کی سنجیدگی

Answer: D.आपल्या समितीनुसार गुन्हेगारीची गंभीरता मान्य कराल
D.As per your committee approves the seriousness of the crime.
D.آپ کی کمیٹی کی منظوری کے مطابق جرم کی سنجیدگی۔

146 **सूचना:** खालील प्रश्नात असे 3 घटक आहेत ज्यांचा परस्परांशी विशिष्ट संबंध आहे. समान संबंध वर्तुळाच्या संचांनी दर्शविलेला आहे, प्रत्येक वर्तुळ त्याचा आकार कितीही असला तरी, एका घटकाचे प्रतिनिधित्व करते. योग्य वर्तुळाच्या संचांशी खालील घटकांच्या जोड्या लावा.

DIRECTION: The question below has three items having certain relationship among them. The same relationship is expressed by sets of circles, each circle representing one item irrespective of its size. Match the items with right set of circles.

ہدایت: مندرجہ ذیل سوال میں تین آئٹم ہیں جن کے مابین مختلف تعلقات ہیں۔ دائروں کے ایک سیٹ کے ذریعہ یکساں تعلق ظاہر کیا جاتا ہے، ہر دائرہ سائز سے قطع نظر ایک آئٹم کی نمائندگی کرتا ہے۔ آئٹم کو دائروں کے درست سیٹ کے ساتھ ملائیں۔

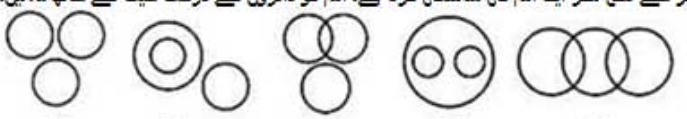

स्त्री, पत्नी, मुलगी
Woman, Wife, Daughter
عورت، بیوی، لڑکی

A. (A)

B. (B)

C. (C)

D. (D)

Answer: D. (D)

147 समजा तुम्ही अशा महत्वाकांक्षी व्यक्तीच्या शेजारी रहात आहात ज्यांनी ज्योतिषीय संदर्भांतून त्यांच्या सर्व प्रोग्राम्सची स्थापना केली. शिवाय, तो एक यशस्वी उद्योजक आहे. त्या व्यक्तिमत्वाविषयी आपण काय विचार कराल?

Suppose you are dwelling in the neighborhood of such an ambitious person who chalked out all his programmers through astrological inferences. Moreover, he is a successful entrepreneur. What considerations will you keep in mind about that personality?

فرض کریں کہ آپ اس طرح کے مہذب شخص کے پڑوس میں رہ رہے ہیں جنہوں نے علم نجوم کے ذریعہ اپنے تمام پروگراموں کو چیلنج کیا.اس کے علاوہ، وہ ایک کامیاب تاجر بھی ہے.آپ اس شخصیت کے بارے میں کیا سوچیں گے؟

A.तुम्ही त्याच्या ज्योतिषविषयक ज्ञानाचा लाभ घ्याल आणि आपली स्वतःची जन्मकुंडली तसेच प्रमुख संदर्भ तयार करून घ्याल
A.You will take advantages of his astrological knowledge and get ready your own horoscope as well as prominent inferences
A.آپ کو اس کے علم نجوم کے فوائد لیں گے اور اپنے زائچہ کے ساتھ ساتھ اہم اشاروں کو تیار کریں گے

B.तुम्हाला या प्रकारच्या ज्ञानावर विश्वास नाही, त्यामुळे त्याचा तुमच्यावर काहीही परिणाम होणार नाही.
B.You have no faith in this kind of knowledge so it has no impact upon you.
B.آپ کو اس طرح کے علم پر کوئی عقیدہ نہیں ہے لہذا اس کا آپ پر کوئی اثر نہیں ہے.

C.आपण आतुर असाल परंतु हे आपले आदर्श नाही
C.You will be excited but find it against your principles
C.آپ پرجوش ہونگے لیکن اسے اپنے اصولوں کے خلاف پائینس گے

D.आपल्याला आपल्या स्वतःच्या क्षमतेवर विश्वास आहे
D.You have confidence in your own caliber
D.آپ کو اپنی صلاحیت پر اعتماد ہے

Answer: D.आपल्याला आपल्या स्वतःच्या क्षमतेवर विश्वास आहे
D.You have confidence in your own caliber
D.آپ کو اپنی صلاحیت پر اعتماد ہے

148 सूचना: खालील प्रश्नांमध्ये दिलेल्या पर्यायांमधून संबंधित अक्षर/शब्द/संख्या निवडा.

देखरेख करणे: वेळ ::

DIRECTIONS: In the following question, select the related letter/word/number from the given alternatives.

WATCH : TIME ::

سمت: مندرجہ ذیل سوال میں، دیے گئے متبادل سے متعلقہ حرف/لفظ/نمبر منتخب کریں۔

گھڑی : وقت ::

A.मैल : अंतर
A.Mile : Distance
A.میل : فاصلہ

B.थर्मामीटरः तापमान
B.Thermometer : Temperature
B.درجہ حرارت : تھرمامیٹر

C.सेकंद : मिनिट
C.Second: Minute
C.سیکنڈ: منٹ

D.हात: पाम
D.Hand:Palm
D. ہاتھ : ہتھیلی

Answer:	B.थर्मामीटरः तापमान B.Thermometer : Temperature B.تھرمامیٹر : درجہ حرارت

149	Out of the four alternatives, choose the one which can be substituted for the given words/sentence. Violation of something holy or sacred
	A.Sacrilege
	B.Pious
	C.Ceremony
	D.Ritual
Answer:	A.Sacrilege

150 सूचना: प्रत्येक प्रश्नाला एक प्रमुख विधानासोबत चार विधाने आहेत ज्यांच्याखाली A, B, C, आणि D असे चार विधान आहेत. क्रमवार विधानांची जोडी निवडा ज्यामध्ये प्रथम विधान दुसऱ्या विधानाला सुचवते, आणि दोन्ही विधाने तर्किकदृष्ट्या प्रमुख विधानासोबत निगडित असेल.

जर तिने तिचे कपडे इस्त्री केले, तर ती कपडे जाळेल
A. तिने तिचे कपडे इस्त्री केले
B. तिने तिचे कपडे इस्त्री केले नाही
C. तिने कपडे नष्ट केले
D. तिने कपडे नष्ट केले नाही

DIRECTIONS: Each question has a main statement followed by four statements labelled A, B, C and D. Choose the ordered pair of statements, where the first statement implies the second, and the two statements are logically consistent with the main statement.

If she irons her clothes , she ruins them .
A. she ironed her clothes
B. she did not iron her clothes
C. she ruined them
D. she did not ruin them

ہدایت: ہر سوال میں ایک جملہ ہے جسکے بعد چار جملےاے، بی،سی اور ڈی کے نام سے دئے گئے ہیں اسمیں منسلک جوڑیوں کو چنئے۔ جہاں پہلا جملہ دوسرے جملہ کی اور اشارہ کر رہا ہے اور دو جملے منطقی مرکزی بیان کے مطابق ہیں

وہ اپنے کپڑے استری کرے تو انہیں برباد کر دیتی ہے۔
Aاس نے اپنے کپڑے استری کیئے ۔
Bاس نے اپنے کپرے استری نہیں کیئے ۔
Cاس نے کپڑے برباد کیئے ۔
Dاس نے کپڑے برباد نہیں کیئے ۔

A.AC
A.AC
A.AC

B.BC
B.BC
B.BC

C.DA
C.DA
C.DA

D.CD
D.CD
D.CD

Answer: A.AC
A.AC
A.AC

151 $4\times\left[\frac{1}{1\times2\times3}+\frac{1}{2\times3\times4}+\frac{1}{3\times4\times5}+\frac{1}{4\times5\times6}\right]=?$

(A) $\frac{14}{15}$

(B) $\frac{12}{15}$

(C) $\frac{13}{15}$

(D) $\frac{11}{15}$

Answer: (A) $\frac{14}{15}$

152 संपर्कातील अडथळे दूर केले जाऊ शकतात जर

The barriers in communication can be overcome if—

مواصلات میں رکاوٹوں کو دور کیا جا سکتا ہے اگر—

A.श्रोत्यात श्रवण करण्याची सर्व उपयुक्त क्षमता आहेत
A.The listener has all the desirable competencies of best listening
A. سامع کے اندر اچھے سننے والے کی تمام مطلوبہ صلاحیتیں ہوں

B.श्रोता प्रेरणादायी स्थितीत आहे
B.The listener is in a state of motivator
B. سامع ترغیبی حالت میں ہو

C.श्रोत्याला काही अतिरिक्त सवलती आहेत
C.The listener has some extra incentives
C. سامع کے اندر اضافی محرکات ہوں

D.वरील सर्व
D.All of the above
D. مندرجہ بالا سبھی

Answer: D.वरील सर्व
D.All of the above
D. مندرجہ بالا سبھی

153 स्लाईड्स तयार करण्याच्या मागचे उद्देश्य

Slides are prepared with the objective of the—

سلائڈز کے مقصد کے ساتھ تیار ہیں—

A.प्रयोगशाळेतील सूक्ष्मजंत्यांचा अभ्यास
A.Study of the microbes in laboratory
A.لیبارٹری میں مائکروبس کا مطالعہ

B.घातक रोग उद्भवणार्या व्हायरसचा अभ्यास
B.Study of the viruses causing fatal diseases
B.مہلک بیماریوں کا باعث بننے والے وائرس کا مطالعہ

C.अदृश्य वास्तविक वस्तू / जनावरांचा अभ्यास ज्यांचा सूक्ष्मदर्शकाद्वारे अभ्यास करता येईल
C.Study of invisible real objects/animals in order to study them through microscope
C.پوشیدہ حقیقی اشیاء / جانوروں کا مطالعہ تاکہ انہیں مائکروسافٹ کے ذریعے مطالعہ کیا جائے

D.वरीलपैकी काहीही नाही
D.None of the above
D.اوپر میں سے کوئی نہیں

Answer: C.अदृश्य वास्तविक वस्तू / जनावरांचा अभ्यास ज्यांचा सूक्ष्मदर्शकाद्वारे अभ्यास करता येईल
C.Study of invisible real objects/animals in order to study them through microscope
C.پوشیدہ حقیقی اشیاء / جانوروں کا مطالعہ تاکہ انہیں مائکروسافٹ کے ذریعے مطالعہ کیا جائے

154 निर्देश: खालील प्रश्न दिलेल्या शब्दांवर आधारित आहेत.

Hell/ Valuable/ Reify/ Plethoric/ Story

जर दिलेल्या शब्दातील अक्षर हे इंग्रजी वर्णमालेप्रमाणे त्याच्या पुढल्या अक्षराने पुनर्स्थित केले असल्यास किती शब्दान मध्ये कमीत कमी एक स्वर राहिल?

DIRECTIONS: Following question is based on the given words.

Hell/ Valuable/ Reify/ Plethoric/ Story

If each of the letters in the given words is replaced by its next letter in the English alphabet then how many words having at least one vowel?

ہدایت جیل کے سوال دے ہے لفجونپر مشتمل ہیں

Hell/ Valuable/ Reify/ Plethoric/ Story

اگر ان لفجوں مے ہر حرف کو انگریجی حرف تہجیبی کے اگلے حرف سے بدلہ جائے تو صرف یک واول والے کتنے لفج ہونگے؟

A.एक
A.One
A.ایک

B.दोन
B.Two
B.دو

C.तीन
C.Three
C.تین

D.चार
D.Four
D.چار

Answer: C.तीन
C.Three
C.تین

155 जर 26 मार्च उद्यानंतर 3 दिवसांनी आहे, त्यादिवशी मंगळवार आहे, तर महिन्याच्या 8 तारखेला काय वार असेल?

If 26 March falls on Tuesday, on what day will the 8th of the month fall?

اگر کل کے بعد 3 دن سے 26 مارچ ہو، وہ منگل ہے۔ تو کس دن مہینہ کی 8 تاریخ ہوگی۔

A.रविवार
A.Sunday
A.اتوار

B.शुक्रवार
B.Friday
B.پیر

C.मंगळवार
C.Tuesday
C.منگل

D.बुधवार
D.Wednesday
D.بدھ

Answer: B.शुक्रवार
B.Friday
B.پیر

156	मादागास्कर हे या खंडामध्ये आहे – Madagascar is in the continent of– مڈگاسکر بر اعظم ----- میں ہے:
	A.आशिया A.Asia A.ایشیا
	B.युरोप B.Europe B. یورپ
	C.अफ्रिका C.Africa C. افریقہ
	D.ऑस्ट्रेलिया D.Australia D.آسٹریلیا
Answer:	C.अफ्रिका C.Africa C. افریقہ

157 सूचना: खालील प्रत्येक प्रश्नात, तीन विधाने दिली आहेत, ज्यांच्यानंतर चार निष्कर्ष आहेत ज्यांना I, II आणि III असे अंकित केले आहे. सर्वसामान्यपणे ज्ञात असलेल्या तथ्यांशी विसंगती असली तरीही, हे सत्य असल्याचे तात्पुरते मानून, सामान्यतः ज्ञात असलेल्या तथ्यांकडे दुर्लक्ष करून, दिलेल्या निष्कर्षांपैकी कोणती तर्कशुद्धपणे विधानांचे अनुसरण करतात ते ठरवा.
विधाने :
कोणताही एक दोन नसतो.
काही दोन तीन असतात.
सर्व चार दोन असतात.
निष्कर्ष:
I. काही चार तीन असतात.
II. कोणताही एक चार नसतो.
III. काही चार एक नसतो.

DIRECTION: In each of the following questions, three statements followed by four conclusions marked I. II, and III are given. Consider the statements to be true, even though they seem to be at variance with the commonly known facts and find out which of the given conclusion(s) logically follow(s) the statements, disregarding the commonly known facts.

Statements:
No one is two.
Some two are threes.
All four are two.

Conclusions:
I. Some four are threes.
II. No one is a four.
III. Some four are not one.

ہدایت: مندرجہ ذیل ہر سوال میں، تین بیانات دیے گئے ہیں جن کے بعد چار نتائج دیے گئے ہیں۔ بیانات کے درست ہونے پر I، II اور III غور کریں، اگرچہ وہ عام طور پر معلوم حقائق کے برعکس نظر آتے ہوں اور تلاش کریں کہ کون سے دیے گئے نتائج منطقی طور پر بیانات کی پیروی کرتے ہیں، عام طور پر معلوم حقائق سے قطع نظر۔

بیانات:
کوئی ایک دو نہیں ہے۔
کچھ دو تین ہیں۔
سبھی چار دو ہیں۔

حل:
I. کچھ چار تین ہیں۔
II. کوئی ایک چار نہیں ہے۔
III. کچھ چار ایک نہیں ہیں۔

A.केवळ निष्कर्ष I आणि II निघत असल्यास.
A.Only I and II follow
A.صرف I اور II پیروی کرتے ہیں

B.केवळ निष्कर्ष I आणि III निघत असल्यास.
B.Only I and III follow
B.صرف I اور III پیروی کرتے ہیں

C.केवळ निष्कर्ष II आणि III निघत असल्यास.
C.Only II and III follow
C.صرف II اور III پیروی کرتے ہیں

D.केवळ निष्कर्ष I निघत असल्यास.
D.Only I follows
D.صرف I پیروی کرتا ہے

Answer: C.केवळ निष्कर्ष II आणि III निघत असल्यास.
C.Only II and III follow
C.صرف II اور III پیروی کرتے ہیں

158 सूचना: यांपैकी प्रत्येक प्रश्नामध्ये दोन विधानांनंतर तीन निष्कर्ष I, II आणि III क्रमांकाने दर्शविले आहेत. सामान्यपणे माहीत असलेल्या तथ्यांबरोबर जुळत नसली तरी खालील विधाने सत्य आहेत असे समजा आणि दिलेल्या विधानांवरुन तर्कशास्त्राच्या दृष्टीने दिलेल्या निष्कर्षांपैकी कोणते योग्य आहेत ते ठरवा.
निवेदन:
काही वर्षे दशके आहेत.
सर्व शतके दशके आहेत.
निष्कर्ष:
I. काही शतके वर्षे आहेत.
II. काही दशके वर्षे आहेत.
III. कोणतेही शतक वर्ष नाही.

DIRECTION: In each of these questions there are two statements followed by three conclusions numbered I, II and III. You have to take the given statements to be true even if they seem to be at variance from commonly known facts and then decide which of the given conclusion logically follows from the given statements.

Statements:
Some years are decades.
All centuries are decades.

Conclusions:
I. Some centuries are years.
II. Some decades are years.
III. No century is a year.

ہدایت:ان میں سے ہر ایک سوال میں دو بیانات دیے گئے ہیں جن کے بعد تین نتائج نمبر I، II اور III دیے گئے ہیں۔ آپ کو دیے گئے بیانات کو درست تسلیم کرنا ہے اگرچہ وہ عام طور پر معلوم حقائق کے برعکس نظر آتے ہوں اور پھر فیصلہ کریں کہ کن سے دیے گئے نتائج منطقی طور پر دیے گئے بیانات کی پیروی کرتے ہیں۔

بیانات:
کچھ سال دہائیاں ہیں۔
تمام صدیاں دہائیاں ہیں۔

حل:
I. کچھ صدیاں سال ہیں۔
II. کچھ دہائیاں سال ہیں۔
III. کوئی صدی سال نہیں ہے۔

A.केवळ निष्कर्ष I किंवा III आणि II यांपैकी निघत असल्यास.
A.Only either I or III and II follow
A.صرف I یا III اور II پیروی کرتے ہیں۔

B.केवळ निष्कर्ष I आणि III निघत असल्यास.
B.Only II & III follow
B.صرف II اور III پیروی کرتے ہیں۔

C.केवळ निष्कर्ष I निघत असल्यास.
C.Only I follows
C.صرف I پیروی کرتا ہے۔

D.केवळ निष्कर्ष II निघत असल्यास.
D.Only II follows
D.صرف II پیروی کرتا ہے۔

Answer: A.केवळ निष्कर्ष I किंवा III आणि II यांपैकी निघत असल्यास.
A.Only either I or III and II follow
A.صرف یا تو I یا III اور II پیروی کرتے ہیں۔

159 पर्यावरण योजनेशी मुख्यत: कोणती संस्था संबंधीत आहे?

Which Organization is mainly related with environment planning?

کونسی تنظیم بنیادی طور پر ماحول کی منصوبہ بندی کے ساتھ جڑی ہے؟

A.सिएसआयआर
A.CSIR
A.سی ایس آئ آر

B.एनइइआरआय
B.NEERI
B.این ای ای آر آئی

C.सिआयएफआयआर
C.CIFRI
C.سی آئی ایف آر آئی

D.आयसीएआर
D.ICAR
D. آی سی اے آر

Answer: B.एनइइआरआय
B.NEERI
B.این ای ای آر آئی

160 DIRECTIONS: A sentence with an underlined phrasal verb is given below. Out of the four options, choose the one which can be substituted for the given phrasal Verb.
Keep to the promise which you made.

A.Sever

B.Break off

C.Betray

D.Adhere to

Answer:	D.Adhere to

161	दुसऱ्या धर्मात प्रवेश -
	A.धर्मप्रवेश
	B.धर्मभ्रष्ट
	C.धार्मिक
	D.धर्मांतर
Answer:	D.धर्मांतर

162	DIRECTIONS: A sentence with an underlined word is given below. Find the Word which is most similar in meaning to the underlined word. This is one of the worst natural <u>disasters</u> ever to befall the area.
	A.Catastrophes
	B.Blessings
	C.Protection
	D.Benediction
Answer:	A.Catastrophes

163	दोन पाईप्स एक टाकी अनुक्रमे 3 तास आणि 3 तास 45 मिनिटांमध्ये भरतात आणि तिसरा पाईप संपूर्ण टाकी 1 तासामध्ये रिकामी करतो. टाकी पाण्याने अर्धी भरलेली आहे आणि तिनही पाईप एकत्र उघडले आहे. किती वेळानंतर टाकी रिकामी होईल ? Two pipes can fill a cistern in 3 hours and 3 hours 45 minutes respectively and a third pipe can empty the whole cistern in an hour. The cistern is half filled with water and all the three pipes are opened together. The time after which the cistern will be emptied, is: دو پائپ ایک سسٹم کو بالترتیب 3 گھنٹوں اور 3 گھنٹے 45 منٹ میں بھر سکتے ہیں،ایک تیسرا پائپ سارے سسٹم کو ایک گھنٹے میں خالی کر سکتا ہے، سسٹم آدھا بھرا ہوا ہے اور تینوں پائپ ایک ساتھ کھولے گئے ہیں، کتنے وقت بعد سسٹم خالی ہو جائے گا؟

A.45 मिनिटे
A.45 minutes
A.45 منٹ

B.1 तास 15 मिनिटे
B.1 hour 15 minutes
B. 1 گھنٹہ 15 منٹ

C.1 तास 30 मिनिटे
C.1 hour 30 minutes
C. 1گھنٹہ 30 منٹ

D.1 तास 45 मिनिटे
D.1 hour 45 minutes
D.1 گھنٹہ 45 منٹ

Answer: B.1 तास 15 मिनिटे
B.1 hour 15 minutes
B. 1 گھنٹہ 15 منٹ

164 ‘ आगीत तेल ओतणे ‘ या वाक्प्रचाराचा अर्थ काय ?

A.भांडणास सुरुवात करणे

B.भांडण विकोपास जाईल अशा तऱ्हेने भर घालणे

C.यज्ञ पेटवणे

D.यापैकी सर्व

Answer: B.भांडण विकोपास जाईल अशा तऱ्हेने भर घालणे

165

विधान:
विद्यार्थ्यांमध्ये लठ्ठपणा वाढत आहे.

कृतीचा कोर्स:
I. शैक्षणिक संस्थांमध्ये योगाचा परिचय द्यावा.
II. निरोगी खाण्याच्या सवयींवर पालक आणि विद्यार्थ्यांना शिक्षण दिले पाहिजे.

Statement:
The obesity among students in increasing.

Course of actions:
I. Yoga should be introduced in educational institutions.
II. Parents and students should be given teaching on healthy eating habits

بیان:
طلباء میں موٹاپا بڑھ رہا ہے۔

لائحہ عمل:
I۔ تعلیمی اداروں میں یوگا متعارف کروانا چاہیے ۔
II۔ طلباء اور والدین کو کھانے کی صحت مند عادات کی تعلیم دی جانی چاہیے ۔

A.फक्त I अनुसरून आहे
A.Only I follows
A. صرف I لاگو ہو گا۔

B.फक्त II अनुसरण करते आहे
B.Only II follows
B. صرف II لاگو ہو گا۔

C.एकतर I किंवा II अनुसरून आहे
C.Either I or II follows
C. I یا II میں سے ایک لاگو ہو گا۔

D.I किंवा II दोन्हीपैकी काहीही अनुसरण करत नाही
D.Both I and II follow
D. I اور II دونوں لاگو ہوں گے۔

Answer:

D.I किंवा II दोन्हीपैकी काहीही अनुसरण करत नाही
D.Both I and II follow
D. I اور II دونوں لاگو ہوں گے۔

166 खालीलपैकी कोण कुचकामी शिक्षक म्हणून ओळखले जाऊ शकतो

Which of the following is most likely to be characterized the in-effective teacher?

مندرجہ ذیل میں سے کونسا ممکنہ طور پر غیر مؤثر استاد کی خصوصیات کا حامل ہے؟

A.मानकांवर जोर देणारा
A.Emphasis upon standards
A.معیارات پر زور

B.समूह श्येयाचे स्पष्टीकरणामध्ये विद्यार्थ्यांची चर्चा यावर जोर देणारा
B.Emphasis upon pupil discussion in the clarification of group goals
B.گروپ کے اہداف کے وضاحت میں طالب علم کی بحث پر زور

C.तत्काळ परिस्थिती नियंत्रणावर जोर देणारा
C.Emphasis upon the control of the immediate situation
C.فوری طور پر صورت حال کے کنٹرول پر زور

D.स्वप्रयत्न केल्याशिवाय मुलांना मदत करण्यास मनाई करणारा
D.Refusal to help children until they have helped themselves
D.بچوں کی مدد کرنے سے انکار کرتے وقت تک کہ وہ اپنے آپ کو مدد نہ کریں

Answer: C.तत्काळ परिस्थिती नियंत्रणावर जोर देणारा
C.Emphasis upon the control of the immediate situation
C.فوری طور پر صورت حال کے کنٹرول پر زور

167 खालीलपैकी सर्वांत मोठा अपूर्णांक शोधा

Find the largest of the following fractions

مندرجہ ذیل کسور میں سے سب سے بڑی کسر تلاش کریں

A.6/35
A.6/35
A.6/35

B.19/98
B.19/98
B.19/98

C.13/69
C.13/69
C.13/69

D.21/113
D.21/113
D.21/113

Answer: B.19/98
B.19/98
B.19/98

168 शिक्षकाचा जर आपल्या विद्यार्थ्यांशी मैत्रीपूर्ण व्यवहार असेल तर ती _____ शिक्षक असेल.

A teacher if friendly with students then she will be _____ teacher

اگر کوئی ٹیچر اپنے طلبہ کے ساتھ دوستانہ مراسم رکھتی ہے، تو وہ _____ ٹیچر ہے۔

A.यशस्वी
A.Successful
A.کامیاب

B.भावनिक
B.Emotional
B.جذباتی

C.निष्काळजी
C.Careless
C.لاپرواہ

D.अज्ञानी
D.Ignorant
D.نظر انداز کرنے والی

Answer: A.यशस्वी
A.Successful
A.کامیاب

169 जेव्हा दोन फाशे एकत्र फिरवले जातात, तेव्हा दोन्ही फाशांवरील संख्यांची बेरीज 9 येण्याची किती संभाव्यता असते?

When two dice are rolled together, what is the probability that the sum of the numbers on the two dice is 9?

جب دو ڈائس ایک ساتھ پھینکی جائیں، تو امکان کیا ہے کہ دو ڈائس کی مجموعہ 9 ہے؟

A.1/8
A.1/8
A.1/8

B.1/12
B.1/12
B.1/12

C.1/6
C.1/6
C.1/6

D.1/9
D.1/9
D.1/9

Answer: D.1/9
D.1/9
D.1/9

170 दिलेली अदलाबदल : चिन्हे ÷ आणि+, तसेच आकडे 2 आणि 4; तर 3 + 1 × 3 ÷ 4–2 चे मूल्य किती ?

Given interchanges: signs ÷ and +, and numbers 2 and 4; then the value of 3 + 1× 3 ÷ 4 - 2 is

دیئے گئے تبادلے: علامات ÷ اور +، اور نمبر 2 اور 4؛ تو 3 + 1× 3 ÷4 - 2کی تعداد ہے

A.10
A.10
A.10

B.9
B.9
B.9

C.8
C.8
C.8

D.7
D.7
D.7

Answer: D.7
D.7
D.7

171 _____ खरेदीदारांना त्यांच्या संगणकांचा वापर करून खरेदी करणे शक्य करते.

_____ makes it possible for shoppers to make purchases using their computers.

_____ دکانداروں کو اپنے کمپیوٹر کے استعمال سے خریداری پر قادر بناتا ہے۔

A.ई-वल्ड
A.E-World
A.ای-ورلڈ

B.ई-कॉमर्स
B.E-Commerce
B.ای کامرس

C.ई-स्पेंड
C.E-spend
C.ای-اسپینڈ

D.ई-बिझिनेस
D.E-business
D.ای-بیوزنس

Answer: B.ई-कॉमर्स
B.E-Commerce
B.ای کامرس

172 The diagram given below represents those students who play Cricket, Football and Kabaddi.

. ذیل میں دیئے گئے ڈایاگرام نے ان طلباء کی نمائندگی کی ہے جو کرکٹ، فٹ بال اور کابدی کھیلتے ہیں.

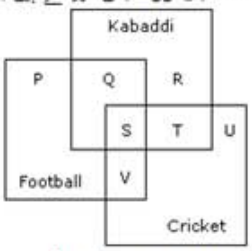

आकृतीचा अभ्यास करा आणि सर्व तिन्ही खेळ खेळणारे विद्यार्थी ओळखा

Study the diagram and identify the students who play all the three games.

اس ڈایاگرام کا مطالعہ کریں اور ان طالب علموں کو پہچان لیں جو تینوں کھیل کھیلتے ہوں.

A. P + Q + R

B. V + T

C. S + T + V

D. S

Answer: D. S

173 आपण एका मोलकरणीला नोकरी वर ठेवले जी अशिक्षित आहे, जेव्हा ती कामावर आली नाही तेव्हा तुम्ही मजुरीतून पैसे कापले जेव्हा ती तिच्या खात्यास तपशीलवार विचारते. या परिस्थितीत आपण तिला काय म्हणाल?

You have employed a maid servant who is illiterate, when she could not turn-up for the work you deduct from her wages, she asks for her account in detail. What would you say to her in this situation ?

آپ نے نوکرانی ملازم رکھی ہے جو ان پڑھ ہے، جب وہ کام پر نہیں آ سکتی تو آپ اس کی اجرت سے کٹوتی کرتے ہیں، وہ اپنے اکاؤنٹ کی تفصیلات پوچھتی ہے.اس صورتحال میں آپ اس سے کیا کہیں گے؟

A.आपण प्रामाणिकपणे तिला हिशेब समजावू आणि तिला शिक्षित करण्यासाठी सर्व प्रयत्न करू
A.You will tell her accounts honestly and will make all efforts to educate her
A.آپ اسے دیانتداری سے حسابات بتائیں گے اور اس کو تعلیم دینے کے لئے تمام کوششیں کریں گے

B.आपण लक्ष देणार नाही कारण तिच्या शिक्षणा नंतर ती डोकेदुखी होईल
B.You will not take any interest because she would become a headache after her education
B.آپ اس میں کوئی دلچسپی نہیں لیں گے کیونکہ وہ تعلیم کے بعد سر درد بن جائے گی

C.आपण गप्प बसाल
C.You will keep mum
C.آپ مم کو رکھیں گے

D.तुम्ही तिला शिकवाल आणि त्यासाठी शुल्क घ्याल.
D.You will teach her and take tuition fee for it.
D.آپ اسے سکھائیں گے اور اس کے لئے ٹیوشن فیس لیں گے.

Answer: A.आपण प्रामाणिकपणे तिला हिशेब समजावू आणि तिला शिक्षित करण्यासाठी सर्व प्रयत्न करू
A.You will tell her accounts honestly and will make all efforts to educate her
A.آپ اسے دیانتداری سے حسابات بتائیں گے اور اس کو تعلیم دینے کے لئے تمام کوششیں کریں گے

174 $$\frac{(9)^2}{3} = ?$$

A. 7

B. 25

C. 27

D. 9

Answer: C. 27

175 अनुक्रम 2, 4, 6,..... चे 5वे पद शोधा:

Find the 5th term of the sequence: 2, 4, 6,.....

2 ,4 ,6 .....,؟اس سرج کی پانچوی ٹرم کیا ہے

A.15
A.15
A.15

B.75
B.75
B.75

C.10
C.10
C.10

D.20
D.20
D.20

Answer: C.10
C.10
C.10

176 "दि गॉड ऑफ स्मॉल थिंग्ज" या पुस्तकाचे लेखक कोण आहेत?

Who is the author of the book “The God of small Things’?

:دی گاڈ آف اسمال تھنگس‘ کے مصنف ہیں’

A.शोभा डे
A.Shobha De
A.شوبھا ڈے

B.मेघनाद देसाई
B.Meghnad Desai
B.میگھناد دیسائی

C.अरुंधती रॉय
C.Arundhati Roy
C.اروندھتی را ئے۔

D.झुंपा लाहिरी
D.Jhumpa Lahiri
D.چھمپا لاہری

Answer: C.अरुंधती रॉय
C.Arundhati Roy
C.اروندھتی را ئے۔

177 सूचना: खालील दिलेल्या प्रश्नांची उत्तरे देण्यासाठी खालील माहितीचा अभ्यास करा.
12 लोक प्रत्येकी सहा लोक असलेल्या दोन समांतर रांगेमध्ये बसले आहेत, अशा प्रकारे बसलेले आहेत की लगतच्या व्यक्तींमधे समान अंतर आहे. रांग 1 मध्ये, P, Q, R, S, T आणि V बसलेले आहेत आणि ते सर्व दक्षिणेकडे बघत आहेत. रांग 2 मध्ये, A, B, C, D, E आणि F बसलेले आहेत आणि ते सर्व उत्तरेकडे बघत आहेत. म्हणून, दिलेल्या आसन व्यवस्थेत, रांगेत बसलेला प्रत्येक सदस्य दुसऱ्या रांगेत बसलेल्या सदस्याच्या समोरासमोर आहे.
A हा D च्या उजवीकडून तिसऱ्या जागेवर बसतो. A किंवा D दोघांपैकी कोणीही टोकाच्या शेवटी बसत नाही. T हा D च्या समोर आहे. V हा A च्या सामोर नाही आणि V कोणत्याही शेवटच्या टोकाशी बसलेला नाही. V हा T चा तात्काळ शेजारी नाही. B सर्वात शेवटच्या टोकावर बसतो. B आणि E च्या मध्ये फक्त दोन लोक बसतात. E हा V च्या सामोर नाही. दोन व्यक्ती R आणि Q च्या मध्ये बसतात. R हा T चा तत्काळ शेजारी नाही. C हा V च्या सामोर नाही. P हा R चा तत्काळ शेजारी नाही.
खालीलपैकी कोण रांगांच्या शेवटच्या टोकाला बसले आहेत?

DIRECTIONS: Study following information to answer the given questions given below it.
Twelve people are sitting in two parallel rows containing six people each, in such a way that there is an equal distance between adjacent persons. In row 1, P, Q, R, S, T and V are seated and all of them are facing South. In row 2, A, B, C, D, E and F are seated and all of them are facing North. Therefore, in the given seating arrangement, each member seated in a' row faces another member of the other row.
A sits third to right of D. Neither A nor D sits at extreme ends. T faces D. V does not face A and V does not sit at any of the extreme ends. V is not an immediate neighbour of T. B sits at one of the extreme ends. Only two people sit between B and E. E does not face V. Two persons sit between R and Q. R is not an immediate neighbour of T. C does not face V. P is not an immediate neighbour of R.
Who amongst the following sit at extreme ends of the rows?

ہدایات: نیچے دیے گئے سوالوں کے جواب دینے کے لیے مندرجہ ذیل معلومات کا مطالعہ کریں۔
بارہ لوگ دو متوازی قطار میں بیٹھے ہیں جس میں ہر ایک میں چھ لوگ شامل ہیں، اس طرح سے کہ قریبی افراد کے درمیان ایک مساوی فاصلہ ہے۔ قطار 1 میں P، Q، R، S، T اور V بیٹھے ہیں اور ان میں سے ہر ایک کا رخ جنوب کی طرف ہے۔ قطار 2 میں A، B، C، D، E اور F بیٹھے ہیں اور ان میں سے ہر ایک کا رخ شمال کی طرف ہے۔ لہذا، دیے گئے بیٹھنے کے انتظام میں، ایک قطار میں بیٹھا ہوا ہر ممبر دوسری قطار کے دوسرے ممبر کے سامنے ہے۔
A کی D کے دائیں سے تیسری جگہ بیٹھا ہے۔ نہ تو A اور نہ ہی D انتہائی کناروں پر بیٹھے ہیں۔ T کا رخ V کی طرف ہے۔ B ایک انتہائی سرے پر بیٹھا ہے۔ V طرف نہیں ہے اور B کا فوری پڑوسی نہیں ہے۔ T، V کسی بھی انتہائی کنارے پر نہیں بیٹھا ہے۔ E کا فوری پڑوسی T، R کے درمیان صرف دو لوگ بیٹھے ہیں۔ V کا رخ E کے درمیان دو لوگ بیٹھے ہیں۔ Q اور R کی طرف نہیں ہے۔ C کا رخ V نہیں ہے۔ V کا فوری پڑوسی نہیں ہے۔ P، R کی طرف نہیں ہے۔
مندرجہ ذیل میں سے کون قطار کے انتہائی سروں پر بیٹھے ہیں؟

A.B, E
A.B, E
A.B, E

B.S, T
B.S, T
B.S, T

C.P, R
C.P, R
C.P, R

	D.B,’F D.B,’F D.B,’F	
Answer:	C.P, R C.P, R C.P, R	
178		3×0.3×0.03×0.003×30 = 3 x 0.3 x 0.03 x 0.003 x 30 = 3 x 0.3 x 0.03 x 0.003 x 30 =
		A.2.4300000000000001E-5 A.2.4300000000000001E-5 A.2.4300000000000001E-5
		B.2.43E-4 B.2.43E-4 B.2.43E-4
		C.2.4299999999999999E-3 C.2.4299999999999999E-3 C.2.4299999999999999E-3
		D.2.4299999999999999E-2 D.2.4299999999999999E-2 D.2.4299999999999999E-2
Answer:		C.2.4299999999999999E-3 C.2.4299999999999999E-3 C.2.4299999999999999E-3

179 **सूचना:** दिलेल्या पर्यायांमधून श्रेणी पूर्ण करणारी योग्य आकृती निवडा.

DIRECTIONS: Complete the series by choosing right figure from the given choices.

ہدایات: دیئے گئے اختیارات میں صحیح شکل کا انتخاب کر کے سیریز کو مکمل کیجیئے.

Problem Figures

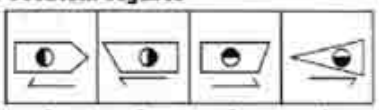

1 2 3 4

Answer Figures

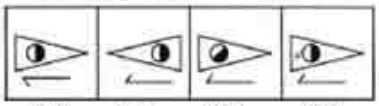

(A) (B) (C) (D)

A. (A)

B. (B)

C. (C)

D. (D)

Answer: D. (D)

180 सूचना: अर्थपूर्ण परिच्छेद निर्माण करण्यासाठी, खाली दिलेली (P), (Q) (R), (S) आणि (T) ही पाच वाक्ये योग्य अनुक्रमाने पुनर्रचना करा; त्यांनतर खालील प्रश्नांची उत्तर द्या.

P. गाढ झोपलेला ससा जागा झाला आणि हळूहळू चालणाऱ्या कासवाने शर्यतीत हरविल्याचा त्याला मोठा धक्का बसला.
Q. ससा लवकरच कंटाळला आणि कासव पोहचेपर्यंत पुष्कळ वेळ आहे, असा विचार करून सशाने विश्रांती घ्यायचे ठरविले.
R. अति आत्मविश्वास असणारा ससा आव्हान स्वीकारतो आणि शर्यत सुरु झाल्याबरोबर खूप वेगाने धावतो.
S. दरम्यान, अंतिम रेषेपर्यंत पोहचत नाही तोपर्यंत कासव हळूहळू चालत राहते.
T. ससा वेगाने धावण्याच्या फुशारक्या मारत असल्याने कासवाने त्याला शर्यत लावण्याचे आव्हान दिले.

पुनर्रचना केल्यानंतर खालीलपैकी कोणते वाक्य तिसरे असेल?

DIRECTION: Rearrange the following five sentences (P), (Q), (R), (S) and (T) in the proper sequence to form a meaningful paragraph; then answer the questions given below them.
P. The overslept hare wakes up, only to be shocked that a slow moving tortoise beat it in the race.
Q. Soon it gets tired and decides to rest, thinking that there's plenty of time to relax before tortoise can catch up with it.
R. The overconfident hare accepts the challenge and runs as fast as it can after the race begins.
S. Meanwhile, the tortoise continues to walk slowly, until it reaches the finish line.
T. Tired of the bragging of a speedy hare, a tortoise challenges it to a race.

Which of the following should be the THIRD sentence after rearrangement?

ہدایات: ان پانچ جملوں (P)، (Q)، (R)، (S) اور (T) کو با معنی پیرا بنانے کے لئے دوبارہ ترتیب دیجئے، پھر نیچے دے گئے سوالوں کے جواب دیجئے

P. دیر تک سونے والا خرگوش جاگ گیا، خالی حیران ہونے کے لئے کی دھیرے چلنے والے کچھوے نے اسے دھوڈ میں ہرا دیا.
Q. جلدی وو تھک گیا اور آرام کرنے کہ ارادہ کیا، یہ سونچ کر کی ابھی آرام کرنے کے لئے بہت وقت ہے اسے پہلے کہ کچھوا اس تک پہنچ جاےگا.
R. ضرورت سے زیادہ بھروسا رکھنے والے خرگوش نے مقابلہ کی دعوت تسلیم کی اور دھوڈ شرو ہونے سے ہی تیز بھاگ گیا.
S. جبکہ ، کچھوا دھیرے چلنے لگا، جب تک وو منزل تک پہنچ گیا.
T. تیز چلنے والے خرگوش کی رفتار سے تنگ آکر، کچھوے نے اسے دھوڈ لگانے کی دعوت دی.

دوبارہ ترییب دینے کے بعد کون سا جملہ تیسرا ہونا چاہیے؟

A.Q
A.Q
A.Q

B.R
B.R
B.R

C.S
C.S
C.S

D.T
D.T
D.T

Answer: A.Q
A.Q
A.Q

181 केरळच्या सायलेंट व्हॅलीमध्ये कोणत्या प्रकारचे जंगल आढळते?

Which kind of forest is found in Silent Valley of Kerala?

کیرالہ کی خاموش وادی میں کس قسم کے جنگل پائے جاتے ہیں؟

A.मॅनग्रोव्ह जंगल
A.Mangrove Forest
A. mangrove جنگل

B.पाणझडी जंगल
B.Deciduous Forest
B. پرنپاتی جنگل

C.ट्रॉपिकल रेन जंगल
C.Tropical Rain Forest
C. اشنکٹبندیی بارش جنگل

D.समुद्रकिनाऱ्याचे आणि दलदलीचे अरण्य
D.Littoral and Swamp Forest
D. ساحلی اور دلدل جنگل

Answer: C.ट्रॉपिकल रेन जंगल
C.Tropical Rain Forest
C. اشنکٹبندیی بارش جنگل

182 सूचना: खालील प्रश्नांमध्ये दिलेल्या पर्यायांमधून संबंधित अक्षर/शब्द/संख्या निवडा.

छत्री : पाऊस : :स्वेटर : ?

DIRECTIONS: In the following question, select the related letter/word/number from the given alternatives.

Umbrella : Rain : :Sweater : ?

سمت: مندرجہ ذیل سوال میں، دیے گئے متبادل سے متعلقہ حرف/لفظ/نمبر منتخب کریں۔

چھاتا : بارش : :سویٹر : ؟

A.हिवाळा
A.Winter
A.سردی

B.सूर्यप्रकाश
B.Sunlight
B.سورج

C.उन्हाळा
C.Summer
C.گرمی

D.प्रकाश
D.Light
D.روشنی

Answer: A.हिवाळा
A.Winter
A.سردی

183 सूचना : खालील प्रत्येक प्रश्नात दोन विधाने I आणि II दिलेले आहेत. हे विधान एकतर स्वतंत्र कारण असू शकतात किंवा स्वतंत्र कारणांचे परिणाम असू शकतात. यांपैकी एक विधान इतर विधानाचा परिणाम असू शकतो. दोन्ही विधाने वाचा आणि खालीलपैकी कोणत्या उत्तराचा पर्याय या दोन्ही विधानांमधील संबंधांचे वर्णन करतो ते ठरवा.

विधान :
I. शीतलला इंग्रजीमध्ये ५०० पैकी १२० गुण मिळाले आहेत.
II. शीतलने इंग्रजीचे ट्युशन घेण्यास सुरुवात केली आहे.

DIRECTIONS: Below in each question are given two statements I and II. These statements may be either independent causes or may be effects of independent causes. One of these statements may be the effect of the other statement. Read both the statements and decide which of the following answer choice correctly depicts the relationship between these two statements.

Statements:
I. Sheetal has received 120 marks out of 500 in English.
II. Sheetal has started taking tuitions of English.

ہدایات: نیچے ہر سوال میں دو بیانات I اور II آ تو یا بیانات یہ۔ ان‌دیے گئے ہیں۔ آزاد وجوہات یا پھر آزاد وجوہات کے اثرات ہو سکتے ہیں
بیانات میں سے ایک بیان دوسرے کا اثر ہو سکتا ہے۔دونوں بیانات پڑھیں اور فیصلہ کریں کہ نیچے دیے گئے کس جواب کا انتخاب ان
دونوں بیانات کے در میان تعلق کو ٹھیک سے ظاہر کرتا ہے۔

بیانات:
I – شیتل نے انگلش میں 500 میں سے 120 نمبر لیے ہیں۔
II ۔ شیتل نے انگلش کی ٹیوشن لینی شروع کر دی ہے۔

A.विधान I कारण आहे आणि विधान II त्याचा परिणाम आहे;
A.Statement I is the cause and statement II is its effect;
A. بیان نمبر I بیان نمبر II وجہ ہے اور بیان نمبر I اس کا اثر ہے۔

B.विधान II कारण आहे आणि विधान I त्याचा परिणाम आहे;
B.Statement H is the cause and statement I is its effect;
B. بیان نمبر II بیان نمبر I وجہ ہے اور بیان نمبر II اس کا اثر ہے۔

C.विधान I आणि II दोन्ही स्वतंत्र कारणे आहेत;
C.Both the statements I and II are independent causes;
C.دونوں بیانات نمبر I اور نمبر II آزاد وجوہات ہیں۔

D.विधान I आणि II दोन्ही स्वतंत्र कारणांचे परिणाम आहेत;
D.Both the statements I and II are effects of independent causes;
D. دونوں بیانات نمبر I اور نمبر II آزاد وجوہات کے اثرات ہیں۔

Answer: A.विधान I कारण आहे आणि विधान II त्याचा परिणाम आहे;
A.Statement I is the cause and statement II is its effect;
A. بیان نمبر I بیان نمبر II وجہ ہے اور بیان نمبر I اس کا اثر ہے۔

184 गृहकार्य म्हणजे काय?

The meaning of Home Assignment is—

گھر کے کام کا مطلب ہے-

A.विद्यार्थ्यांनी घरी शाळेचे काम पूर्ण करण्यासाठी
A.To complete the school work at home by the students
A.طلباء کی طرف سے گھر پر اسکول کے کام کو مکمل کرنے کے لئے

B.शिक्षकांच्या मदतीने घरी काम पूर्ण करणे
B.To complete the work at home with the help of tutor
B.ٹیوٹر کی مدد سے گھر پر کام مکمل کرنے کے لئے

C.विद्यार्थ्यांनी घरी वर्गवारीचे सविस्तर लेख तयार करणे
C.To prepare the detailed account of classwork at home by the students
C.طلباء کی طرف سے گھر میں کلاس جیتنے کے تفصیلی اکاؤنٹ تیار کرنے کے لئے

D.वरीलपैकी काहीही नाही
D.None of the above
D.اوپر میں سے کوئی نہیں

Answer: C.विद्यार्थ्यांनी घरी वर्गवारीचे सविस्तर लेख तयार करणे
C.To prepare the detailed account of classwork at home by the students
C.طلباء کی طرف سے گھر میں کلاس جیتنے کے تفصیلی اکاؤنٹ تیار کرنے کے لئے

185	सूचना: दिलेल्या पर्यायांमधून वेगळे ते बाहेर काढा. DIRECTIONS: Find the odd one out from the given alternatives. سمت: دیے گئے متبادل میں سے بے جوڑ کو تلاش کرو۔	
	A.MAP A.MAP A.MAP	
	B.TAP B.TAP B.TAP	
	C.CAP C.CAP C.CAP	
	D.CAB D.CAB D.CAB	
Answer:	D.CAB D.CAB D.CAB	
186	188 × 212 =? 188 × 212 =? 188 × 212 =?	
	A.38956 A.38956 A.38956	
	B.39866 B.39866 B.39866	
	C.39856 C.39856 C.39856	
	D.39956 D.39956 D.39956	

Answer: C.39856
C.39856
C.39856

187 जर अंगठीला कानातले म्हटले, कानातल्याला ब्रेसलेट म्हटले, ब्रेसलेटला पैंजण म्हटले, पैंजणाला बांगड्या म्हटले आणि बांगड्यांना घड्याळ म्हटले. तर खालीलपैकी कोणती वस्तू आपण बोटात घालू शकतो?

If rings are called earrings, earrings are called bracelet, bracelet is called anklet, anklets are called bangles and bangles are called watch. Which of the following we can wear on finger?

اگر انگوٹھی کو کان کی بالی، کان کی بالی کو کنگن، کنگن کو پازیب، پازیب کو چوڑی اور چوڑی کو گھڑی کہا جائے تو ہم انگلی میں پہننے کے لیے مندرجہ ذیل میں سے کیا استعمال کرسکتے ہیں؟

A.अंगठी
A.Rings
A.انگوٹھی

B.बांगडी
B.Bangles
B.چوڑی

C.कानातले
C.Earrings
C.کان کی بالی

D.घड्याळ
D.Watch
D.گھڑی

Answer: C.कानातले
C.Earrings
C.کان کی بالی

188 Out of the given options, choose the one which is the correct passive voice of the sentence given below.
He does not write a letter.

A.The letter were not written by him.

B.The letter have not been written by him.

C.A letter have not been written by him.

D.A letter is not written by him.

Answer: D.A letter is not written by him.

189 गुजरातच्या लोकसंख्येत घट होऊन ती 120540 वरून 115200 वर आली. घटीची टक्केवारी काढा.

The Population of Gujarat decreases from 120540 to 115200. Find the percentage decrease?

گجرات کی آبادی میں120540 سے 115200 کی کمی واقع ہوتی ہے؟ آبادی میں کتنے فی صد کمی واقع ہوتی ہے؟

A.4.43%

A.4.43%

A.4.43%

B.2%

B.2%

B.2%

C.3.80%

C.3.80%

C.3.80%

D.5.6%

D.5.6%

D.5.6%

Answer: A.4.43%

A.4.43%

A.4.43%

190 एका शोरूममध्ये, 30 पैकी 25 सदस्य हे कामगार आहेत आणि उरलेले दुकानदार आहेत. तर कामगारांच्या संख्येचा एकूण सदस्यांच्या संख्येशी असलेले गुणोत्तर शोधा.

In a showroom, out of 30 members 25 are workers and remaining shopkeeper. Find the ratio of the number of workers to the number of total members?

ایک شو روم میں، 30 ممبر میں 25 مزدور ہیں اور باقی دکاندار ہیں۔ کل ممبر کی تعداد کے مقابلہ میں مزدوروں کی تعداد کا تناسب معلوم کریں؟

A.6:7
A.6:7
A.6:7

B.4:5
B.4:5
B.4:5

C.7:5
C.7:5
C.7:5

D.5:6
D.5:6
D.5:6

Answer: D.5:6
D.5:6
D.5:6

191 निर्देश: खालील प्रश्नांमध्ये प्रश्न चिन्हाच्या (?) जागी कोणते अंदाजे मूल्य यायला हवे? (तुम्ही अचूक मूल्य काढण्याचे अपेक्षित नाही).
384×15+44=?

DIRECTIONS: What approximate value should come in place of the question mark (?) in the following questions? (You are not expected to calculate the exact value.).

384×15+44=?

ہدایات: مندرجہ ذیل سوال میں سوال کا نشان (?) کی جگہ پر کون سا تخمینہ ویلیو آئے گا - (آپ کو صحیح ویلیو نکالنے کی ضرورت نہیں ہے)
384×15+44=?

A.5280
A.5280
A.5280

B.5420
B.5420
B.5420

C.5804
C.5804
C.5804

D.5480
D.5480
D.5480

Answer: C.5804
C.5804
C.5804

192 सरळ रूप द्या:
2246.62 + 1.20 + 2123.86 + 422.12 = ?

Simplify:
2246.62 + 1.20 + 2123.86 + 422.12 = ?

آسان بنائیں:
2246.62 + 1.20 + 2123.86 + 422.12= ?

A.4792.8
A.4792.8
A.4792.8

B.4793.8
B.4793.8
B.4793.8

C.4795.8
C.4795.8
C.4795.8

D.4693.8
D.4693.8
D.4693.8

Answer: B.4793.8
B.4793.8
B.4793.8

193 सी जीवनसत्वाचे रासायनिक नाव काय आहे?

What is the chemical name for Vitamin C?

وٹامن سی کا کیمیکل نام کیا ہے؟

A.फॉलिक आम्ल
A.Folic acid
A.فولک ایسڈ

B.थायामिन
B.Thiamine
B.تھیامائن

C.अँस्कॉर्बिक आम्ल
C.Ascorbic acid
C.اسکوربک ایسڈ

D.कोकोफेरॉल
D.Tocopherol
D.ٹوکوفیرل

Answer: C.अँस्कॉर्बिक आम्ल
C.Ascorbic acid
C.اسکوربک ایسڈ

194 $q^2+3q+2=0$ या वर्गसमीकरणाची मुळे आहेत:

The roots of the quadratic equation $q^2+3q+2=0$ are:

مربع مساوات کے روٹ $q^2+3q+2=0$ ہیں:

A.-1, 2
A.-1, 2
A.-1, 2

B.2, 1
B.2, 1
B.2, 1

C.-2,-1
C.-2,-1
C.-2,-1

D.2,-1
D.2,-1
D.2,-1

Answer: C.-2,-1
C.-2,-1
C.-2,-1

195 _____ _____ ह्याची संकल्पना लिओ फेस्टिंगरद्वारे प्रस्तावित केली गेली

The concept of _____ _____ was proposed by Leo Festinger

_____ کا تصور لیو فسٹنگر (Leo Festinger) کے ذریعہ پیش کیا گیا تھا۔

A.आकलन संतुलन
A.Cognition balance
A.وجدانی توازن

B.बोधात्मक सुसंगतपणा
B.Cognitive consistency
B. وجدانی بستگی

C.बोधात्मक विसंवाद
C.Cognitive dissonance
C.وجدانی ناموزونیت

D.बोधात्मक ओळख
D.Cognitive identification
D.وجدانی شناخت

Answer: C.बोधात्मक विसंवाद
C.Cognitive dissonance
C.وجدانی ناموزونیت

196 Out of the given options, choose the one which is the correct indirect speech of the sentence given below.
The child said to the fruit-seller, “Are all these mangoes sweet?”

A.The child asked the fruit-seller if all these mangoes are sweet.

B.The child asks the fruit-seller if all these mangoes were sweet.

C.The child asked the fruit-seller if all those mangoes were sweet.

D.The child asks the fruit-seller if all those mangoes had been sweet.

Answer: C.The child asked the fruit-seller if all those mangoes were sweet.

197 मनोविकारीय प्रतिक्रियांचा समुह सत्य, भावनांचा मोकळेपणा आणि विचारांचा व वर्तनाचा विरूपण व गोंधळ अलिप्त एकात्मिक व्यक्तीमत्वाच्या कार्यन्वयनापासून विभाजित होण्यानुसार वर्गिकृत केल्या जातो त्याला म्हणतात.

A group of psychotic reactions characterized by the break-down of integrated personality functioning withdrawal from reality, emotion bluntly and distortion / disturbances in thoughts & behaviour is called

کچھ نفسیاتی رد عمل جن کی خاصیت ہے کہ وہ داخلی شخصیت کے کام کاج کو بند کر دیتے ہین، حقیقت سے دور کر دیتے ہیں، جذبات کا بے ساختہ اظہار کرتے ہیں اور افکار اور رویے میں تحریف و اضطراب کا سبب بنتے ہیں، انہیں کہا جاتا ہے:

A.छिन्नमानस
A.Schizophreme
A. اسکیزو فریم

B.अल्झायमर्स
B.Alzheimer's
B. الزائمر

C.मानसिक दुर्बलता
C.Mental retardation
C.دماغی خسارہ

D.मामा
D.Mama
D. ماما

Answer: A.छिन्नमानस
A.Schizophreme
A. اسکیزو فریم

198 पियाजेटचा सिद्धांत मुलाच्या याचेशी संबंधित आहे

Piagets principle is revealed to child's

پیگیٹ کا اصول بچوں کے تعلق سے کس چیز کا انکشاف کرتا ہے

A.मानसिक विकास
A.Psychological development
A.نفسیاتی ترقی

B.भावपूर्ण भावना
B.Emotional feelings
B.جذباتی احساسات

C.बोधात्मक विकास
C.Cognitive development
C.ادراکی ترقی

For More Info And Videos About TAIT-Exam Syllabus And Other Exam Visit My Channel
TAIT च्या 30 प्रश्नपत्रिका PDF
BADSHAHimp Available Request 9765226781
WWW.YouTube.com/BADSHAHimp
Subscribe My Channel

D.शारीरिक विकास
D.Physical development
D.جسمانی ترقی

Answer: C.बोधात्मक विकास
C.Cognitive development
C.ادراکی ترقی

199 कांद्यामध्ये अन्न संग्रहित करायचे स्वरूप आहे:

The food in Onion is stored in the form of:

پیاز میں موجود غذائیت _____ میں شکل میں جمع ہوتی ہے۔

A.सेल्युलोज
A.Cellulose
A.سیلولوس

B.प्रोटीन
B.Protein
B.پروٹین

C.स्टार्च
C.Starch
C.اسٹارچ

D.शर्करा
D.Sugar
D.سوگر

Answer: A.सेल्युलोज
A.Cellulose
A.سیلولوس

200 33 विध्यार्थ्यांच्या वर्गात रमेशचा क्रमांक 13 वा आहे. अनुक्रमानुसार सुरेशच्याखाली 5 विद्यार्थी आहेत. तर सुरेश आणि रमेशच्या मध्ये किती विध्यार्थी आहेत ?

Ramesh ranks 13th in a class of 33 students. There are 5 students below Suresh Rankwise. How many students are there between Ramesh and Suresh?

رمیش کا 33 طالب علم کی کلاس میں 13 وہ درجہ ہے. درجے کے حساب سے پانچ لڑکے سریش سے نیچے ہے.رمیش اور سریش کے درمیان کتنے طالب علم ہے؟

For More Info And Videos About TAIT-Exam Syllabus And Other Exam Visit My Channel
TAIT च्या 30 प्रश्नपत्रिका PDF
BADSHAHimp Available Request 9765226781
WWW.YouTube.com/BADSHAHimp
Subscribe My Channel

A.12
A.12
A.12

B.14
B.14
B.14

C.15
C.15
C.15

D.16
D.16
D.16

Answer: B.14
B.14
B.14

For More Info And Videos About TAIT-Exam Syllabus And Other Exam Visit My Channel
BADSHAHimp TAIT च्या 30 प्रश्नपत्रिका PDF Available Request 9765226781
WWW.YouTube.com/BADSHAHimp
Subscribe My Channel

Question Paper Title : TAIT_PAPER_14

Date of Exam : 2017-12-17 16:00:00.0

1	' आकाश ठेंगणे होणे ' या वाक्प्रचाराचा अर्थ काय ?
	A.उंच उड्या मारणे
	B.उंच झोका घेणे
	C.भूईसपाट होणे
	D.गर्वाने फुगून जाणे
Answer:	D.गर्वाने फुगून जाणे

For More Info And Videos About TAIT-Exam Syllabus And Other Exam Visit My Channel
BADSHAHimp TAIT च्या 30 प्रश्नपत्रिका PDF Available Request 9765226781
YouTube WWW.YouTube.com/BADSHAHimp Subscribe My Channel

2 सूचना: प्रत्येक प्रश्नाला एक प्रमुख विधानासोबत चार विधाने आहेत ज्यांच्याखाली A, B, C आणि D असे चार विधान आहेत. क्रमवार विधानांची जोडी निवडा ज्यामध्ये प्रथम विधान दुसऱ्या विधानाला सुचवते, आणि दोन्ही विधाने तर्किकदृष्ट्या प्रमुख विधानासोबत निगडित असेल.

विद्यार्थी जेंव्हा उत्तम बोलतात, तेव्हा त्यांचे कौतुक होते
A. विद्यार्थी उत्तम बोलले नाहीत
B. विद्यार्थी उत्तम बोलले
C. त्यांचे कौतुक झाले
D. त्यांचे कौतुक झाले नाही

DIRECTIONS: Each question has a main statement followed by four statements labelled A, B, C and D. Choose the ordered pair of statements, where the first statement implies the second, and the two statements are logically consistent with the main statement.

When students speak well , they get appreciation
A. students did not speak well
B. The students spoke well
C. they got appreciation
D. they did not appreciation

ہدایت: ہر سوال میں ایک جملہ ہے جسکے بعد چار جملےاے، بی،سی اور ڈی کے نام سے دئے گئے ہیں اسمیں منسلک جوڑیوں کو چنئے۔ جہاں پہلا جملہ دوسرے جملہ کی اور اشارہ کر رہا ہے اور دو جملے منطقی مرکزی بیان کے مطابق ہیں

اسٹوڈنٹس اچھا بولیں تو ان کی حوصلہ افزائی کی جاتی ہے
A۔ اسٹوڈنٹس اچھا نہیں بولے
B۔ اسٹوڈنٹس اچھا بولے
C۔ ان کی حوصلہ افزائی کی گئی
D۔ ان کی حوصلہ افزائی نہیں کی گئی

A.AC
A.AC
A.AC

B.BC
B.BC
B.BC

C.DA
C.DA
C.DA

D.CD
D.CD
D.CD

Answer: A.AC
A.AC
A.AC

3

खालील आकृतीमध्ये ∠BOC चे मूल्य काढा.

Find the value of ∠BOC in the following figure.

مندرجہ ذیل شکل میں ∠BOC کی قدر تلاش کریں.

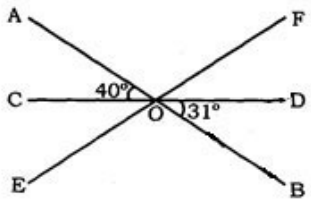

(A) 90°

(B) 75°

(C) 124°

(D) 149°

Answer: (D) 149°

4

'जागृती' या शब्दाचा विरुद्धार्थी शब्द कोणता ?

A.जाग

B.बेसावधपणा

C.जागेपणा

D.जागरण

Answer: B.बेसावधपणा

For More Info And Videos About TAIT-Exam Syllabus And Other Exam Visit My Channel
BADSHAHimp TAIT च्या 30 प्रश्नपत्रिका PDF Available Request 9765226781
YouTube WWW.YouTube.com/BADSHAHimp Subscribe My Channel

5 **सूचना:** दिलेल्या चारांपैकी वेगळी (असंबद्ध) असणारी आकृती शोधून काढा.

DIRECTIONS: Find the odd from the given four figures.

ہدایات: دیئے گئے چار شکلوں میں سے طاق شکل کونسی ہے؟

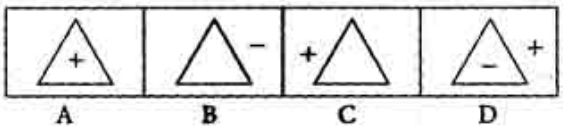

A. (A)

B. (B)

C. (C)

D. (D)

Answer: D. (D)

For More Info And Videos About TAIT-Exam Syllabus And Other Exam Visit My Channel
TAIT च्या 30 प्रश्नपत्रिका PDF
BADSHAHimp Available Request 9765226781
WWW.YouTube.com/BADSHAHimp
Subscribe My Channel

6 सूचना: प्रत्येक प्रश्नाला एक प्रमुख विधानासोबत चार विधाने आहेत ज्यांच्याखाली A, B, C आणि D असे चार विधान आहेत. क्रमवार विधानांची जोडी निवडा ज्यामध्ये प्रथम विधान दुसऱ्या विधानाला सुचवते, आणि दोन्ही विधाने तर्किकदृष्ट्या प्रमुख विधानासोबत निगडित असेल.

जर लिखाण चांगले असेल, तर शिक्षक चांगले ग्रेड देतात.
A. लिखाण चांगले होते
B. लिखाण चांगले नव्हते
C. शिक्षकाने चांगले ग्रेड दिले
D. शिक्षकाने चांगले ग्रेड दिले नाही

DIRECTIONS: Each question has a main statement followed by four statements labelled A, B, C and D. Choose the ordered pair of statements, where the first statement implies the second, and the two statements are logically consistent with the main statement.

If writing is good, the teacher gives good grades.
A. The Writing was good
B. The Writing was not good
C. The teacher gave good grades
D. The teacher did not give good grades

ہدایت: ہر سوال میں ایک جملہ ہے جسکے بعد چار جملےاے، بی،سی اور ڈی کے نام سے دئے گئے ہیں اسمیں منسلک جوڑیوں کو چنئے۔ جہاں پہلا جملہ دوسرے جملہ کی اور اشارہ کر رہا ہے اور دو جملے منطقی مرکزی بیان کے مطابق ہیں

رائٹنگ اچھی ہو تو ٹیچر اچھے نمبر دیتا ہے۔
Aرائٹنگ اچھی تھی ۔
Bرائٹنگ اچھی نہیں تھی ۔
Cٹیچر نے اچھے نمبر دیئے ۔
Dٹیچر نے اچھے نمبر نہیں دیئے ۔

A.AC
A.AC
A.AC

B.BC
B.BC
B.BC

C.DA
C.DA
C.DA

D.CD
D.CD
D.CD

Answer: A.AC
A.AC
A.AC

7

सूचना: अर्थपूर्ण परिच्छेद निर्माण करण्यासाठी, खाली दिलेली (P), (Q) (R), (S) आणि (T) ही पाच वाक्ये योग्य अनुक्रमाने पुनर्रचना करा; त्यांनतर खालील प्रश्नांची उत्तर द्या.
P. बगळ्याला अपमान वाटला आणि त्याने बदला घायचे ठरविले.
Q. त्याने कोल्ह्याला आपल्यासोबत जेवणासाठी आमंत्रित केले आणि शिजविलेला भात एका सुरईमध्ये दिला. त्यामुळे कोल्हा खाऊ शकला नाही.
R. कोल्हा आणि बगळा दोघे मित्र होते.
S. बगळ्याला लांब चोच होती, त्यामुळे तो सूप पिऊ शकला नाही, पण कोल्ह्याने आपले डिश चाटून पुसुन खाल्ली.
T. एक दिवशी कोल्ह्याने बगळ्याला जेवायला आमंत्रित केले आणि रुंद डिशमध्ये सूप प्यायला दिला.

पुनर्रचना केल्यानंतर खालीलपैकी कोणते वाक्य चौथे असेल?

DIRECTION: Rearrange the following five sentences (P), (Q), (R), (S) and (T) in the proper sequence to form a meaningful paragraph; then answer the questions given below them.
P. The crane felt insulted and wanted to take revenge.
Q. He invited the fox to dine with him, and served boiled rice in a jug which he could not eat
R. A fox and crane were friends
S. The crane had a long beak, so could not take the soup, but the fox licked the dish.
T. One day, the fox invited the crane to dinner, and put the soup in a flat dish.

Which of the following should be the FOURTH sentence after rearrangement?

ہدایات: ان پانچ جملوں (P)، (Q)، (R)، (S) اور (T) کو با معنی پیرا بنانے کے لئے دوبارہ ترتیب دیجئے، پھر نیچے دے گئے سوالوں کے جواب دیجئے

P. سارس کو بےعزتی لگی اور وو بدلا لینا چاہتا تھا.
Q. اسنے لومڑی کو شام کے خانے کی دعوت دی، اور ابلا چاول جگ میں دیا جو وو کھا نہیں سکھتا تھا.
R. ایک لومڑی اور سارس دوست تھے.
S. سارس کی چونچ لمبھی تھی، اسلئے وو شور بہ نہی پی سکھتا تھا، لیکن لومڑی نے سارا کھانا کھا لیا.
T. ایک دن ، لومڑی نے سارس کو شام کے کھانے کی دعوت دی، اور شور بہ ایک ہموار برتن میں رکھا.

دوبارہ ترییب دینے کے بعد کون سا جملہ چوتھا ہونا چاہیے؟

A.P
A.P
A.P

B.R
B.R
B.R

C.S
C.S
C.S

D.T
D.T
D.T

Answer:	A.P A.P A.P	

8		कविता लिहिणारी -
		A.कवी
		B.कवियत्री
		C.कवयित्री
		D.काव्या
Answer:		C.कवयित्री

9		सूचना: खालील माहिती काळजीपूर्वक वाचा आणि खाली दिलेल्या प्रश्नांची उत्तरे द्या. M, P, J, B, R, T आणि F एका वर्तुळात केंद्राबाध्ये बघत बसलेले आहेत. B हा J च्या डाव्या बाजूला तिसरा आहे जो M च्या डाव्या बाजूस दुसरा आहे. P हा B च्या डाव्या बाजूला तिसरा आणि R च्या उजव्या बाजूला दुसरा आहे. T हा M चा तत्काळ शेजारी नाही. खालीलपैकी कोणत्या जोडीमध्ये दुसरा व्यक्ती पहिल्या व्यक्तीच्या तत्काळ उजवीकडे बसलेला आहे? DIRECTIONS: Read the following information carefully and answer the questions that given below. M, P, J, B, R, T and F are sitting around a circle facing at the centre. B is third to the left of J who is second to the left of M. P is third to the left of B and second to the right of R. T is not an immediate neighbour of M. In which of the following pairs the second person is sitting to the immediate right of the first person? ہدایات: مندرجہ ذیل معلومات کو دھیان سے پڑھیں اور نیچے دیے گئے سوالوں کے جواب دیں۔ M، P، J، B، R، T اور F مرکز کا رخ کیے ہوئے ایک دائرہ کے ارد گرد بیٹھےہوئے ہیں۔ B، J کے M کے بائیں سے تیسرا ہے جو کہ P، B کے بائیں سے دوسرا ہے۔ R کے دائیں سے دوسرا ہے۔ T، M کا فوری پڑوسی نہیں ہے۔ مندرجہ ذیل جوڑوں میں سے کس میں دوسرا شخص پہلے شخص کے فوری دائیں طرف بیٹھا ہے؟
		A.JR A.JR A.JR
		B.PJ B.PJ B.PJ
		C.TR C.TR C.TR

For More Info And Videos About TAIT-Exam Syllabus And Other Exam Visit My Channel
TAIT च्या 30 प्रश्नपत्रिका PDF
BADSHAHimp Available Request 9765226781
WWW.YouTube.com/BADSHAHimp
Subscribe My Channel

D.MP
D.MP
D.MP

Answer: C.TR
C.TR
C.TR

10 अँजेला मर्केल या _____आहेत

Angela Merkel is the –

انجیلا مارکل ہیں:

A.जर्मनीच्या अध्यक्षा
A.President of Germany
A.جرمنی کی صدر

B.जर्मनीचे कुलपती
B.Chancellor of Germany
B.جرمنی کی چانسلر ۔

C.बोलिव्हियाचे अध्यक्ष
C.President of Bolivia
C.بولیویا کی صدر ۔

D.बोलिव्हियाचे कुलपती
D.Chancellor of Bolivia
D.بولیویا کی چانسلر

Answer: B.जर्मनीचे कुलपती
B.Chancellor of Germany
B.جرمنی کی چانسلر ۔

11 एका घनाला रंगवून 216 लहान आणि समान घनांमध्ये कापले गेले आहे.
फक्त एकच रंगवलेला चेहरा असलेले किती लहान घन आहेत?

A cube is painted and cut into 216 smaller and identical cubes by making the minimum possible number of cuts.
How many smaller cubes have only one painted face?

ایک کیوب کے رنگ دیکر 216 ایک جیسے ٹکڑے جائیں تو، کتنے ایسے چھوٹے کیوب کے ٹکڑے ہوں گے جن کا 1 منہ رنگین ہو؟

For More Info And Videos About TAIT-Exam Syllabus And Other Exam Visit My Channel
TAIT च्या 30 प्रश्नपत्रिका PDF
BADSHAHimp Available Request 9765226781
WWW.YouTube.com/BADSHAHimp
Subscribe My Channel

A.64
A.64
A.64

B.96
B.96
B.96

C.216
C.216
C.216

D.50
D.50
D.50

Answer: B.96
B.96
B.96

12 $36^{36} - 32^{32}$ चा एकक स्थानचा अंक

Unit digit of $36^{36} - 32^{32}$ is

$36^{36} - 32^{32}$ کا یونٹ ہندسہ ہے؟

A.0
A.0
A.0

B.4
B.4
B.4

C.6
C.6
C.6

D.2
D.2
D.2

Answer: A.0
A.0
A.0

For More Info And Videos About TAIT-Exam Syllabus And Other Exam Visit My Channel
TAIT च्या 30 प्रश्नपत्रिका PDF
BADSHAHimp Available Request 9765226781
WWW.YouTube.com/BADSHAHimp
Subscribe My Channel

13 DIRECTIONS: A sentence with an underlined word is given below. Find the Word which is most similar in meaning to the underlined word.
India's software companies have prospered by keeping costs to a bare minimum.

A.Flourished

B.Ended

C.Failed

D.Declined

Answer: A.Flourished

14 खालीलपैकी कोणत्या स्थ'नावर 'जी' चे मूल्य सर्वात मोठे आहे?

At which of the following locations the value of 'g' is the largest?

مندرجہ ذیل میں سے کس محل وقوع پر "g" کا ویلو سب سے بڑا ہوتا ہے؟

A.माउंट एव्हरेस्टवर
A.On top of Mount Everest
A.ماونٹ ایوریسٹ کے اوپر

B.कुतुब मिनारवर
B.On top of Qutub Minar
B.قطب منار کے اوپر

C.भूमध्यरेषाच्या एका ठिकाणावर
C.At a place on Equator
C.خط استوا کی جگہ پر

D.अंटार्क्टिकामध्ये एका शिबिर स्थळावर
D.A camp site in Antarctica
D.انٹارکٹیکا میں ایک کیمپ سائٹ

Answer: D.अंटार्क्टिकामध्ये एका शिबिर स्थळावर
D.A camp site in Antarctica
D.انٹارکٹیکا میں ایک کیمپ سائٹ

15 खालीलपैकी अशुद्ध शब्द कोणता ?

A.झूळूक

B.झुबका

	C.झुलवाझुलवी
	D.झोडपणे
Answer:	A.झूळूक

16	सरळ रूप द्या: 4128 – 2100 =? Simplify: 4128 – 2100 =? 2100 – 4128 ؟ساده بناے: =?
	A.2028 A.2028 A.2028
	B.2128 B.2128 B.2128
	C.3028 C.3028 C.3028
	D.2228 D.2228 D.2228
Answer:	A.2028 A.2028 A.2028

17 सूचना: खालील प्रत्येक प्रश्नात, तीन विधाने दिली आहेत, ज्यांच्यानंतर चार निष्कर्ष आहेत ज्यांना I, II आणि III असे अंकित केले आहे. सर्वसामान्यपणे ज्ञात असलेल्या तथ्यांशी विसंगती असली तरीही, हे सत्य असल्याचे तात्पुरते मानून, सामान्यतः ज्ञात असलेल्या तथ्यांकडे दुर्लक्ष करून, दिलेल्या निष्कर्षांपैकी कोणती तर्कशुद्धपणे विधानांचे अनुसरण करतात ते ठरवा.
विधाने :
कोणतेही पेनं पेन्सिल नसते.
कोणतीही पेन्सिल कागद नसते
कोणताही कागद बोर्ड नसतो.
निष्कर्ष:
I. कोणताही पेनं कागद नसते.
II. काही पेन्सिली बोर्ड्स नसतात.
III. कोणताही बोर्ड पेनं नसतो.

DIRECTION: In each of the following questions, three statements followed by four conclusions marked I. II, and III are given. Consider the statements to be true, even though they seem to be at variance with the commonly known facts and find out which of the given conclusion(s) logically follow(s) the statements, disregarding the commonly known facts.

Statements:
No pen is pencil.
No pencil is paper.
No paper is board.

Conclusions:
I. No pen is paper.
II. Some pencils are not boards.
III. No board is pen.

ہدایت: مندرجہ ذیل ہر سوال میں، تین بیانات دیے گئے ہیں جن کے بعد چار نتائج دیے گئے ہیں۔ بیانات کے درست ہونے پر غور I، II اور III کریں، اگرچہ وہ عام طور پر معلوم حقائق کے برعکس نظر آتے ہوں اور تلاش کریں کہ کون سے دیے گئے نتائج منطقی طور پر بیانات کی پیروی کرتے ہیں، عام طور پر معلوم حقائق سے قطع نظر۔

بیانات:
کوئی قلم پنسل نہیں ہے۔
کوئی پنسل کاغذ نہیں ہے۔
کوئی کاغذ بورڈ نہیں ہے۔

حل:
I. کوئی قلم کاغذ نہیں ہے۔
II. کچھ پنسل بورڈ نہیں ہیں۔
III. کوئی بورڈ قلم نہیں ہے۔

A.केवळ निष्कर्ष I निघत असल्यास.
A.Only I follows
A.صرف I پیروی کرتا ہے

B.केवळ निष्कर्ष II निघत असल्यास.
B.Only II follows
B.صرف II پیروی کرتا ہے

C.केवळ निष्कर्ष III निघत असल्यास.
C.Only III follows
C.صرف III پیروی کرتا ہے

D.कोणतेही निष्कर्ष निघत नसल्यास.
D.None follows
D.کوئی مطابق نہیں ہے

Answer: D.कोणतेही निष्कर्ष निघत नसल्यास.
D.None follows
D.کوئی مطابق نہیں ہے

18 चिंता विकार अशा तऱ्हेने योग्यपणे स्पष्ट केला जाऊ शकतो

Anxiety disorder can be well explained as

تشویش کی خرابی کو اچھی طرح واضح کیا جاسکتا ہے بطور

A.अचानक वाटणाऱ्या भीतीने ओळखली जाणारी भावनात्मक अवस्था
A.Emotional state identified by panic attacks
A.جذباتی صورتحال کی شناخت خوف کے حملہ کے طور پر کیا جاسکتا ہے

B.अत्यधिक तपासणीची भावनात्मक अवस्था
B.Emotional condition of excessive checking
B. زیادہ جانچ کی جذباتی صورتحا؛

C.विचित्र विचार
C.Disordered thinking
C.ناپسندیدہ سوچ

D.साशंकता, अनिश्चितता आणि भीतीची भावना
D.Feelings of apprehension, uncertainty & fear
D.اندیشہ، غیر یقینیی اور خوف کا احساس

Answer: D.साशंकता, अनिश्चितता आणि भीतीची भावना
D.Feelings of apprehension, uncertainty & fear
D.اندیشہ، غیر یقینیی اور خوف کا احساس

19 अम्पिअर याचे एकक आहे:

Ampere is the unit of:

ایمپئر _____ کی یونٹ ہے۔

A.प्रवाह विज
A.Current electricity
A.بجلی

B.विद्युयत भार
B.Electric charge
B.الیکٹرک چارج

C.चुंबकीय क्षेत्र
C.Magnetic field
C.میگنیٹک فیلڈ

D.प्रतिरोध
D.Resistance
D.ریسسٹنس

Answer:

A.प्रवाह विज
A.Current electricity
A.بجلی

20 आकलनादरम्यान इतरांबद्दल माहिती अधिक किंवा कमी प्रमाणात रूपांतरीत होणे म्हणजे

Information about others is converted into more or less co-during cognitions is

دوسروں کے بارے میں معلومات جو وجدان کے عالَم میں کم یا زیادہ ہوجائے _____کہلاتا ہے۔

A.साचेबंद
A.Stereotypes
A.اسٹیریوٹائپس) لکیر کا فقیر، غیر مبتدل)

B.अनुरूपता
B.Conformity
B.روایات کی تقلید

C.अंकीत करणे
C.Imprinting
C.نقوش کی اتباع

D.सामाजिकरण
D.Socialization
D.سماج کاری

Answer:

A.साचेबंद
A.Stereotypes
A.اسٹیریوٹائپس) لکیر کا فقیر، غیر مبتدل)

21	खालीलपैकी कोणते खरे साप नाही? Which one of the following is not a true snake? مندرجہ ذیل میں سے کون سچا سانپ نہیں ہے؟
	A.काचेचे साप A.Glass snake A.شیش ناگ
	B.सागरी साप B.Sea snake B.بحری سانپ
	C.वृक्ष साप C.Tree snake C.شجری سانپ
	D.अंधळेसाप D.Blind snake D.اندھا سانپ
Answer:	A.काचेचे साप A.Glass snake A.شیش ناگ
22	पुढील जोडशब्द पूर्ण करा . ‘ दळण ----------’
	A.जाते
	B.चक्की
	C.पीठ
	D.वळण
Answer:	D.वळण
23	मुल केंद्रित पद्धत मध्ये व्याख्याने-आणि-प्रात्यक्षिक करण्यासाठी शिक्षकाने कोणती सावधगिरी बाळगली पाहिजे? What precautions does a teacher should take to make lecture-cum-demonstration method a child-centred method? لیکچر کم ڈیمانسٹریشن کے طریقہ کو چائلڈ سینٹرڈ بنانے کے لئے اساتذہ کو کیا احتیاطی تدابیر اختیار کرنی چاہیئے؟

A.प्रात्यक्षिक हेतूने प्रयोग, व्यवस्था आणि उपयोजनांचे आयोजन व व्यवस्था करण्यात विद्यार्थ्यांचा सक्रीय सहकार्य घेणे
A.To take active co-operation of students in arranging and organising the experiments, apparatus for demonstration purposes
A.طلباء کے فعال تعاون اور اظہار کے مقاصد کے لئے تجربات کے آلات کو منظم اور مرتب کرنے کے لئے اقدامات کرنا

B.विद्यार्थ्यांना स्वतंत्रपणे वाचन करण्यास स्वातंत्र्य देणे
B.To impart freedom to the students to take readings independently
B.طالب علموں کو آزادانہ طور پر پڑھنے کے لئے آزاد کرنا

C.विद्यार्थ्यांना जिज्ञासा पुर्ण करण्यासाठी चरण-दर-चरण पद्धतीमध्ये प्रात्यक्षिक आयोजित करणे
C.To organise the demonstration in a step-by-step manner in order to satisfy students curiosities
C.طالب علموں کے تجسس کو پورا کرنے کے لئے وضاحتی عمل کو مرحلہ وار انداز میں منظم کرنا

D.वरील सर्व
D.All the above
D.مذکورہ تمام

Answer: D.वरील सर्व
D.All the above
D.مذکورہ تمام

24 निर्देश: पुढील प्रश्नांपैकी प्रत्येक प्रश्नात एक संख्या गहाळ आहे. मालिकेचा नमुना समजून घ्या आणि योग्य संख्या निवडा.
6, 9, 15, 27, ..., 99

DIRECTION: In each of the following questions, one number is missing in the series. You have to understand the pattern of the series and insert the number.

6, 9, 15, 27, ..., 99

ہدایت جیل کے ہر سوال میں سرج کا ایک نمبر گمشدہ ہے . آپکو اس سرج کو سمجھنا ہے. اور گمشدہ نمبر کو یہا کھوجنا ہے

6, 9, 15, 27, ..., 99

A.51
A.51
A.51

B.34
B.34
B.34

C.37
C.37
C.37

D.84
D.84
D.84

Answer: A.51
A.51
A.51

25 ट्रेनला स्तंभ पार करण्यासाठी 10 सेकंद लागतात, तर 450 मीटर लांब थांबलेल्या ट्रेनला पार करण्यासाठी 30 सेकंद लागतात. ट्रेनची गती काढा.

A train required 10 seconds to pass a pole, while it requires 30 second to cross a standing train which is 450 meters long. Find the speed of train.

ایک ٹرین کو ایک کھمبے کو پار کرنے کے لئے 10 سیکنڈ کی ضرورت ہوتی ہے، جبکہ اسے ایک کھڑی ٹرین پار کرنے کے لئے 30 سیکنڈ کی ضرورت ہوتی ہے جو 450 میٹر لمبی ہے۔ ٹرین کی رفتار معلوم کریں

A.75 किमी/तास
A.75 kmph
A.75 کلو میٹر فی گھنٹہ

B.81 किमी/तास
B.81 kmph
B.81 کلو میٹر فی گھنٹہ

C.90 किमी/तास
C.90 kmph
C.90 کلو میٹر فی گھنٹہ

D.100 किमी/तास
D.100 kmph
D.100 کلو میٹر فی گھنٹہ

Answer: B.81 किमी/तास
B.81 kmph
B.81 کلو میٹر فی گھنٹہ

26 एका व्यक्तीचा असा ठाम विश्वास आहे की संगोपनाचा त्याच्या मुलाच्या विकासावर अतिशय परिणाम होतो. तो याच्याशी सहमत होणार नाही चे महत्त्व

A person strongly believes that nurture strongly influences the development of his child. He would not agree with the Importance of

ایک شخص پورے طور پر یقین کرتا ہے کہ سختی سے نشونما بچے کے ڈولپمینٹ کو متاثر کرتا ہے۔ وہ اس کے ساتھ متفق نہیں ہوگا کی اہمیت سے

A.आनुवांशिक घटक
A.Genetic factors
A.جینیاتی عناصر

B.समवयस्क लोकांमध्ये मिसळण्याची संधी
B.Exposure to peers
B.ساتھیو ں سے اثرات لینا

C.घरातील आनंद
C.Joys at home
C.گھر پر خوشی

D.आई-वडिल प्रदर्शित करीत असलेला प्रेमळपणा
D.Warmth displayed by parents
D.والدین کے ذریعہ ظاہر کئے گئے والہانہ اظہار

Answer: A.आनुवांशिक घटक
A.Genetic factors
A.جینیاتی عناصر

27 एखाद्याची आपली गुण मनोवृत्ती किंवा व्यक्तिगत प्रक्रिया इतरांना दर्शवण्याच्या प्रक्रियेला म्हणतात

The process of attributing one’s own traits attitudes or subjective process to others is called

دوسروں کو اپنی اپنی علامات کے رویے یا ذہنی عمل کی منسوب کرنے کا عمل کہا جاتا ہے

A.पूर्वस्थिती
A.Predisposition
A. پریڈیسپوزیشن

B.प्रतिगमन
B.Regression
B.ریگریشن

C.मनोरचना
C.Disposition
C.ڈسپلے

D.प्रक्षेपण
D.Projection
D.پروجیکشن

Answer: D.प्रक्षेपण
D.Projection
D.پروجیکشن

28

सूचना: आकृती(X)मध्ये दिलेल्या आकारांचा वापर करून (a), (b), (c), (d) या आकारांमधील कोणता आकार तयार करता येईल?

DIRECTIONS: Find out which of the figure (a), (b), (c), (d) can be formed from the pieces given in fig. (X).

ہدایات: (x) شکل میں جو ٹکڑے دیئے گئے ہیں ان (a), (b), (c), (d) ان میں سے کونسی شکلیں بن سکتی ہیں دریافت کریں۔

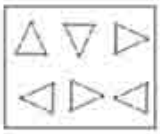

(X)

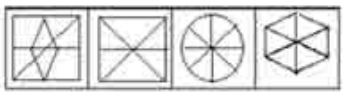

(A) (B) (C) (D)

A. (A)

B. (B)

C. (C)

D. (D)

Answer: D. (D)

29

मध्य प्रदेशचे शिवपुरी राष्ट्रीय उद्यान प्रसिद्ध आहे -

Shivpuri National Park of Madhya Pradesh is famous for -

مدھیہ پردیش کے شیوپوری نیشنل پارک مشہور ہے -

A.वाघ आणि हत्ती
A.Tiger and elephant
A. شیر اور ہاتھی

B.जंगली बायसन
B.Wild Bison
B. جنگلی بائسن

C.पक्षी
C.Birds
C. پرندے

D.चित्ता आणि ठिपक्याचे हरण
D.Leopard and Spotted deer
D. چیتے اور چتکبرا ہرن

Answer: D.चित्ता आणि ठिपक्याचे हरण
D.Leopard and Spotted deer
D. چیتے اور چتکبرا ہرن

30 54 सेकंदामध्ये मिनिट काट्याद्वारे काय कोन बनवला जातो?

What angle is made by minute hand in 54 sec.?

54 سکنڈ میں منٹ کی سوئی سے کونسا زاویہ بنتا ہے؟

A.5.4°
A.5.4°
A.5.4°

B.6.4°
B.6.4°
B.6.4°

C.2.4°
C.2.4°
C.2.4°

D.7.4°
D.7.4°
D.7.4°

Answer: A.5.4°
A.5.4°
A.5.4°

31 एका विशिष्ट सांकेतिक भाषेमध्ये, जर GROUND हा शब्द HPRQSX असा कूटबध्द केला जात असेल, NOURISH म्हणून काय कूटबध्द केले जाईल?

In a certain code language, if the word GROUND is coded as HPRQSX, then what is coded as NOURISH?

ایک مخصوص ضابطے کی زبان میں، اگر لفظ GROUND کو HPRQSX لکھاجاتاہے، تو NOURISH کو کیا لکھاجائیگا؟

A.OMXNNMO
A.OMXNNMO
A.OMXNNMO

B.MQRVDYA
B.MQRVDYA
B.MQRVDYA

C.MQRTFXA
C.MQRTFXA
C.MQRTFXA

D.OMVNMNO
D.OMVNMNO
D.OMVNMNO

Answer: A.OMXNNMO
A.OMXNNMO
A.OMXNNMO

32 सूचना: दिलेल्या पर्यायांमधून वेगळे ते बाहेर काढा.

DIRECTIONS: Find the odd one out from the given alternatives.

سمت: دیے گئے متبادل میں سے بے جوڑ کو تلاش کرو۔

A.उन्हाळा
A.Summer
A.گرمی

B.हिवाळा
B.Winter
B.سردی

C.पावसाळी
C.Rainy
C.برسات

D.सूर्यप्रकाश
D.Sunny
D.روشن

Answer: D.सूर्यप्रकाश
D.Sunny
D.روشن

33 खालीलपैकी नपुंसकलिंगी शब्द ओळखा.

A.भाषण

B.भाषांतर

C.भाष्य

D.यापैकी सर्व

Answer: D.यापैकी सर्व

34 Choose the word which is most similar in meaning to the given word.
LAZY

A.Sluggish

B.Active

C.Industrious

D.Energetic

Answer: A.Sluggish

35 **सूचना:** खालील प्रश्नात उत्तरातील पर्यायांपैकी कोणत्या पर्यायी आकृतीत प्रश्नातील आकृती अंतर्भूत आहे?

DIRECTIONS: In the given question find the answer figure in which question figure is embedded.

ہدایات: دیئے گئے سوال میں جواب والی شکل دریافت کیجیئے جس میں سوال والی شکل سرایت کرگئی ہے۔

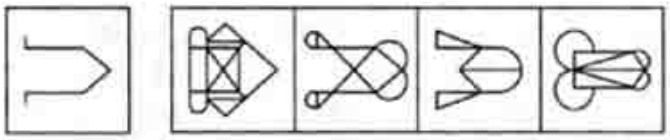

A. (A)

B. (B)

C. (C)

D. (D)

Answer: B. (B)

36 आक्रमकतेचे कारण हे आहे. _____

Cause of aggression is

جارحیت کا سبب ہے:

A.जन्माच्या प्रवृत्ती
A.Inborn tendency
A.پیدائشی میلان

	B.मुलाचे पालनपोषण B.Child rearing B.بچے کی پرورش
	C.निराशा C.Frustration C. محرومی
	D.(a) हे सर्व D.All of these D.مذکورہ تمام
Answer:	D.(a) हे सर्व D.All of these D.مذکورہ تمام
37	जंजिरा किल्ला कोणत्या राज्यामध्ये आहे The Janjira Fort is in the state of- جنجیرہ فورٹ صوبہ---میں ہے
	A.मध्य प्रदेश A.Madhya Pradesh A.مدھیہ پردیش
	B.उत्तर प्रदेश B.Uttar Pradesh B.اتر پردیش
	C.महाराष्ट्र C.Maharashtra C.مہاراشٹر -
	D.यांपैकी कोणतेही नाही D.None of these D.ان میں سے کوئی نہیں
Answer:	C.महाराष्ट्र C.Maharashtra C.مہاراشٹر -

38

सूचना: दिलेल्या चारांपैकी वेगळी (असंबद्ध) असणारी आकृती शोधून काढा.

DIRECTIONS: Find the odd from the given four figures.

ہدایات: دیئے گئے چار شکلوں میں سے طاق شکل کونسی ہے؟

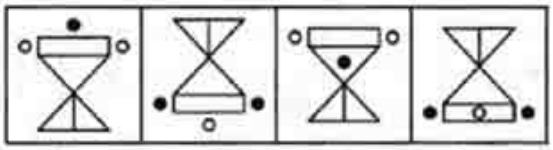

A. (A)

B. (B)

C. (C)

D. (D)

Answer: D. (D)

39 मूलभूत अधिकारांच्या अंमलबजावणीसाठी संविधानाने यावर विशेष जबाबदारी दिली आहे:

The Constitution confers special responsibility for the enforcement of fundamental rights upon the:

آئین بنیادی حقوق کے نفاذ کے لئے خصوصی ذمہ داری قبول کرتا ہے

A.राष्ट्रपती
A.President
A. صدرکی

B.सर्वोच्च न्यायालय
B.Supreme Court
B. سپریم کورٹ کی

C.राज्य विधानमंडळ
C.State Legislature
C. ریاست کی قانون سازی

D.संसद
D.Parliament.
D. پارلیمنٹ.

Answer: B.सर्वोच्च न्यायालय
B.Supreme Court
B. سپریم کورٹ کی

40 सूचना: खालील माहिती काळजीपूर्वक वाचा आणि खाली दिलेल्या प्रश्नांची उत्तरे द्या.
M, P, J, B, R, T आणि F एका वर्तुळात केंद्राबाध्ये बघत बसलेले आहेत. B हा J च्या डाव्या बाजूला तिसरा आहे जो M च्या डाव्या बाजूस दुसरा आहे. P हा B च्या डाव्या बाजूला तिसरा आणि R च्या उजव्या बाजूला दुसरा आहे. T हा M चा तत्काळ शेजारी नाही.
Rच्या संदर्भात Fची स्थिती काय असेल?
(A) डावीकडे तिसरा
(B) उजवीकडे चौथा
(C) उजवीकडून तिसरा

DIRECTIONS: Read the following information carefully and answer the questions that given below.
M, P, J, B, R, T and F are sitting around a circle facing at the centre. B is third to the left of J who is second to the left of M. P is third to the left of B and second to the right of R. T is not an immediate neighbour of M.
What is F's position with respect to R?
(A) Third to the left
(B) Fourth to the right
(C) Third to the right

ہدایات: مندرجہ ذیل معلومات کو دھیان سے پڑھیں اور نیچے دیے گئے سوالوں کے جواب دیں۔
M، P، J، B، R، T اور F مرکز کا رخ کیے ہوئے ایک دائرہ کے ارد گرد بیٹھےہوئے ہیں۔ B، J کے M کے بائیں سے تیسرا ہے جو کہ P، B کے بائیں سے تیسرا اور R کے بائیں سے دوسرا ہے۔ T، M کے دائیں سے دوسرا ہے۔ T، M کا فوری پڑوسی نہیں ہے۔
R کے تعلق سے F کے پوزیشن کیا ہے؟
(A) بائیں سے تیسری
(B) دائیں سے چوتھی
(C) دائیں سے تیسری

A.केवळ (A)
A.Only (A)
A.صرف (A)

B.केवळ (B)
B.Only (B)
B.صرف (B)

C.केवळ (C)
C.Only (C)
C.صرف (C)

D.दोन्ही (A) आणि (B)
D.Both (A) and (B)
D. (A) اور (B) دونوں

Answer: D.दोन्ही (A) आणि (B)
D.Both (A) and (B)
D. (A) اور (B) دونوں

41	सरळ रूप द्या: 1.62 + 10.08 + 110.009 = ? Simplify: 1.62 + 10.08 + 110.009 = ? آسان بنائیں: 1.62 + 10.08 + 110.009= ?
	A.121.709 A.121.709 A. 121.709
	B.131.709 B.131.709 B.131.709
	C.141.709 C.141.709 C. 141.709
	D.151.709 D.151.709 D. 151.709
Answer:	A.121.709 A.121.709 A. 121.709

42	Choose the word which is opposite in meaning to the given word. ERRATIC
	A.Consistent
	B.Inconsistent
	C.Irregular
	D.Unstable
Answer:	A.Consistent

43 मुलांचे थेट अनुभव ह्याच्याशी संबंधित असतात

The direct experiences of children are related to—

بچوں کے براہ راست تجربات کا تعلق ہے—

A.फेरफटका
A.Excursions
A.تفریح

B.पर्यावरणीय परस्परसंवाद
B.Environmental interactions
B.ماحولیاتی تعامل

C.रयोगांचे प्रात्यक्षिक
C.Demonstrations of experiments
C.تجربات کا مظاہرہ

D.वरील सर्व
D.All the above
D.مذکورہ تمام

Answer: D.वरील सर्व
D.All the above
D.مذکورہ تمام

44 'लेमुर'च्या सर्व प्रजाती स्थानीय रोगी आहेत त्या जगातील खालीलपैकी कोणत्या ठिकाणच्या आहेत

All species of 'Lemur' are endemic to which among the following places of the world?

لیمر کی تمام نسلیں دنیا کی درجذیل میں سے کس علاقے سے متعلق ہے

A.मादागास्कर बेटे
A.Madagascar Islands
A. مڈغگاسکر جزائر

B.अँडॅमन्स
B.Andamans
B. انڈمان

C.अरुणाचल प्रदेश
C.Arunachal Pradesh
C. اروناچل پردیش

D.ब्राझिलियन रेनफोर्नस्टस्
D.Brazillian Rainforests
D.برازیل برسات

Answer: A.मादागास्कर बेटे
A.Madagascar Islands
A. مڈغگاسکر جزائر

45 शाळेत टायफायडमुळे विद्यार्थी अनुपस्थित होता. त्याच्या पालकाने तुम्हाला त्याचे सुटलेले अभ्यास पूर्ण करण्यासाठी वर्गातल्या एका विद्यार्थ्यांचे पुस्तक देण्याची विनंती केली तर आपले काय कराल ?

A student is absent due to typhoid in the school. His guardian has requested you to spare somebody's class-notes to cover the class-work of the child. What will be your next step?

ایک طالب علم ٹائیفائڈ کی وجہ سے اسکول سے غیر حاضر ہے. اس کے سرپرست نے آپ سے درخواست کی ہے کہ کسی اور لے نوٹس دے کر اس کے کلاس کے کام کو مکمل کیا جائے۔آپ کا اگلا قدم کیا ہوگا؟

A.पालकांना त्यांच्या परिसरात राहणाऱ्या विद्यार्थ्यांकडून नोटबुक तयार करण्याचा सल्ला द्याल
A.Advise the parents to manage note-books from the student who is residing in their locality
A.والدین کو مشورہ دینا کہ قریبی علاقے کے طالب علم سے نوٹ بک کا انتظام کریں

B.पालकांना आपण या प्रकरणात मदत करण्यास असमर्थ आहात असे दर्शवाल
B.Show the parents your inability to help in this matter
B.والدین کو اس معاملے میں مدد کرنے میں اپنی نااہلی دکھائیں

C.वर्गाच्या सर्वोत्तम मुलाला त्याचे पुस्तक द्यायला सांगाल
C.You ask the best boy/girl of the class to spare his/her note-books for the class-mate
C.آپ کلاس کے بہترین لڑکے سے کہیں گے کہ کلاس کے ساتھیوں کے لئے اپنی نوٹ بک الگ کرے

D.पालकांना सांगाल काळजी करू नये, मुल स्वतःच वर्ग-काम पूर्ण करून घेईल असे सांगाल
D.Suggest the parents not to worry, the child himself will complete the class-work.
D.تجویز کریں کہ والدین فکر نہ کریں، بچے خود کلاس کے کام کو مکمل کریں گے.

Answer: C.वर्गाच्या सर्वोत्तम मुलाला त्याचे पुस्तक द्यायला सांगाल
C.You ask the best boy/girl of the class to spare his/her note-books for the class-mate
C.آپ کلاس کے بہترین لڑکے سے کہیں گے کہ کلاس کے ساتھیوں کے لئے اپنی نوٹ بک الگ کرے

46 ' सदैव ' या शब्दाची संधी सोडवा.

A.स + दैव

B.स + देव

C.सदा + देव

D.सदा + एव

Answer: D.सदा + एव

47 DIRECTIONS: A sentence with an underlined phrasal verb is given below. Out of the four options, choose the one which can be substituted for the given phrasal Verb.
He said he was fine, but I knew he was keeping something back.

A.hiding

B.revealing

C.showing

D.telling

Answer: A.hiding

48 Out of the given options, choose the most appropriate one to fill in the blank.
Problems _____if the parents' approach to discipline is inconsistent.

A.arise

B.has arise

C.has arises

D.have arises

Answer: A.arise

49 सूचना: खाली दिलेल्या विधान (A) आणि कारण (R) साठी, खालील पैकी योग्य पर्याय निवडा:

विधान (A): रात्रीच्या वेळी झाडाखाली झोपू नये.
कारण (R): झाडं रात्री ऑक्सिजनला कार्बन डायऑक्साइडमध्ये रूपांतरित करतात.

DIRECTION: For the Assertion (A) and Reason (R) given below, choose the correct alternative from the following:

Assertion (A): We should avoid sleeping under trees during night time.
Reason (R): Trees convert oxygen into carbon dioxide at night.

ہدایت: نیچے دئیے گئے اسرشن (A) اور (R) وجہ کے لئے، مندرجہ ذیل میں سے صحیح متبادل منتخب کریں:

اسرشن (A): ہمیں رات کے وقت درختوں کے نیچے سونے سے بچنا چاہئے۔
وجہ (R): درخت رات میں آکسیجن کو کاربن ڈائی آکسائیڈ میں تبدیل کرتے ہیں۔

A.दोन्ही (A) आणि (R) सत्य आहेत आणि (R) (A) च योग्य स्पष्टीकरण आहे.
A.Both (A) and (R) are true and (R) is the correct explanation of (A)
A. (A) اور (R) دونوں صحیح ہیں اور (A) کی درست وضاحت ہے

B.दोन्ही (A) आणि (R) खरे आहेत, परंतु (R) (A) च योग्य स्पष्टीकरण नाही
B.Both (A) and (R) are true, but (R) is not the correct explanation of (A)
B. (A) اور (R) دونوں صحیح ہیں، لیکن (A) کی درست وضاحت نہیں ہے

C.(A) सत्य आहे, परंतु (R) खोटे आहे
C.(A) is true, but (R) is false
C. (A) صحیح ہے، لیکن (R) غلط ہے

D.(A) खोटे आहे, परंतु (R) सत्य आहे
D.(A) is false, but (R) is true
D. (A) غلط ہے، لیکن (R) صحیح ہے

Answer: A.दोन्ही (A) आणि (R) सत्य आहेत आणि (R) (A) च योग्य स्पष्टीकरण आहे.
A.Both (A) and (R) are true and (R) is the correct explanation of (A)
A. (A) اور (R) دونوں صحیح ہیں اور (A) کی درست وضاحت ہے

50 यामध्ये आत्मघाती प्रवृत्ती फार सामान्य नाहीत

Suicidal tendencies are not very common in

خودکشی کا رجحان کس میں بہت عام نہیں ہوتا ہے

A.एकाकी व्यक्ती
A.Lonely person
A.تنہا شخص

B.वृद्ध
B.Old age
B.عمر دراز

C.विवाहित व्यक्ती
C.Married individual
C.شادی شدہ اکیلا

D.नैराश्य
D.Depression
D.ڈپریشن

Answer: C.विवाहित व्यक्ती
C.Married individual
C.شادی شدہ اکیلا

51 तीन संख्या 1:2:3 या गुणोत्तरामध्ये आहेत आणि त्यांचा मसावी 12 आहे. त्या संख्या आहेत?

Three numbers are in the ratio 1:2:3 and their H.C.F. is 12. The numbers are?

تین نمبر تناسب 3: 2: 1 میں ہیں اور ان کے ایچ سی.ایف۔ 12ہے۔ نمبر ہیں؟

A.4, 8, 12
A.4, 8, 12
A.4, 8, 12

B.6, 8, 12
B.6, 8, 12
B.6, 8, 12

C.12, 24, 36
C.12, 24, 36
C.12, 24, 36

D.4, 12, 16
D.4, 12, 16
D.4, 12, 16

Answer: C.12, 24, 36
C.12, 24, 36
C.12, 24, 36

52 खालीलपैकी सर्वांत लहान अपूर्णांक शोधा

Find the smallest of the following fractions

مندرجہ ذیل کسور میں سے سب سے چھوٹی کسر تلاش کریں

A.1/12
A.1/12
A.1/12

B.18/218
B.18/218
B.18/218

C.4/50
C.4/50
C.4/50

D.19/230
D.19/230
D.19/230

Answer: C.4/50
C.4/50
C.4/50

53 खालील प्रश्नात एक उघडलेला फासा दाखविला आहे आणि उत्तराचे पर्याय म्हणून चार पूर्ण फासे दाखविले आहेत. उघडलेला फासा परत बंद केल्यानंतर कुठचा फासा तयार होईल तो योग्य पर्याय निवडा

In question given below, an unfolded dice is given while four answer choices are given in the form of complete dices. Select the correct answer which is formed by folding the unfolded dice.

نیچے دئیے گئے سوال میں، ایک بغیر فولد کیا ہوا پاسہ دیا گیا ہے جبکہ اختیاری جوابات چار دئے گئے ہیں، ایک مکمل پاسہ کی شکل صحیح جواب کو چنئے جو بغیر فولڈ کئے ہوئے پاسہ کو فولڈ کرنے سے ملے گا؟.

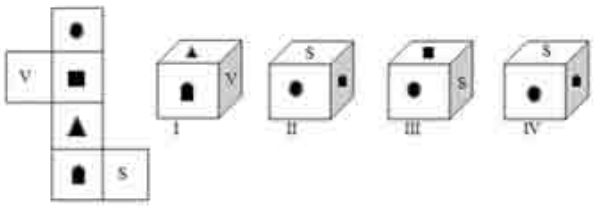

A. I

B. II & III

C. I, II & III

D. I, II, III & IV

Answer: D. I, II, III & IV

54 रॉजर फेडरर हा _____ खेकाशी संबंधित आहे

Roger Federer is associated with –

روجرفیڈرر جڑی ہوے ہیں:

A.टेनिस
A.Tennis
A.ٹینس سے

B.बॅडमिंटन
B.Badminton
B.بیڈمنٹن سے ۔

C.स्क्वॅश
C.Squash
C.اسکواش سے

D.यांपैकी कोणतेही नाही
D.None of these
D.انمیں سے کوئی نہیں ۔

Answer: A.टेनिस
A.Tennis
A.ٹینس سے

55 जर एखाद्या शिक्षकाचे व्यक्तिमत्व कमजोर असेल तर त्याच्या विद्यार्थ्यां मध्ये कमजोर व्यक्तिमत्वाचे गुणधर्म शक्यता असते. ह्याचे कारण असे आहे

If a teacher’s personality is weak it is a possibility that his students inherit this trait. The reason of this saying is—

اگر استاد کی شخصیت کمزور ہے تو اس کا امکان یہ ہے کہ اس کے طالب علموں کو یہ خصوصیت ملے.اس قول کا مطلب یہ ہے—

A.विद्यार्थी हे शिक्षकांच्या वर्तनाचे लघुरूप आहे
A.Student is the miniature model of teacher’s behavior
A.طالب علم استاد کے رویے کا ایک مختصر ماڈل ہے

B.विद्यार्थी आपल्या शिक्षकांच्या वर्तनाचे अनुकरण करतात
B.Students imitate his teacher’s behavior
B.طالب علم اپنے استاد کے رویے کی نقل کرتے ہیں

C.विद्यार्थी विकासाच्या टप्प्यातून जात असतात
C.Students pass through developmental stages
C.طالب علم ترقیاتی مراحل سے گزرتے ہیں

D.विद्यार्थ्याला शिक्षकां प्रमाणे वागल्या मुले प्रोत्साहन मिळत
D.Students get encouragement, if they behave as their teachers.
D.طالب علموں کو حوصلہ افزائی، اگر وہ اپنے اساتذہ کے طور پر عمل کریں.

Answer: B.विद्यार्थी आपल्या शिक्षकांच्या वर्तनाचे अनुकरण करतात
B.Students imitate his teacher’s behavior
B.طالب علم اپنے استاد کے رویے کی نقل کرتے ہیں

56 फासा तीन वेळा फिरवला. काट्यावर दर्शवलेल्या संख्यांची बेरीज ही किती परिणामांमध्ये किमान 17 असेल?

A dice is rolled thrice. In how many outcomes is the sum of the numbers shown on thorn is at least 17?

اگر ایک ڈائس 3 بار پھینکی جائے۔ تخت پر آنے والے نمبرات میں کم از کم 17 کے مجموعے والے نتائج کی تعدادکتنی ہے؟

A.15
A.15
A.15

B.4
B.4
B.4

C.5
C.5
C.5

D.14
D.14
D.14

Answer: B.4
B.4
B.4

57 सूचना: अर्थपूर्ण परिच्छेद निर्माण करण्यासाठी, खाली दिलेली (P), (Q) (R), (S) आणि (T) ही पाच वाक्ये योग्य अनुक्रमाने पुनर्रचना करा; त्यांनतर खालील प्रश्नांची उत्तर द्या.
P. बगळ्याला अपमान वाटला आणि त्याने बदला घायचे ठरविले.
Q. त्याने कोल्ह्याला आपल्यासोबत जेवणासाठी आमंत्रित केले आणि शिजविलेला भात एका सुरईमध्ये दिला. त्यामुळे कोल्हा खाऊ शकला नाही.
R. कोल्हा आणि बगळा दोघे मित्र होते.
S. बगळ्याला लांब चोच होती, त्यामुळे तो सूप पिऊ शकला नाही, पण कोल्ह्याने आपले डिश चाटून पुसुन खाल्ली.
T. एक दिवशी कोल्ह्याने बगळ्याला जेवायला आमंत्रित केले आणि रुंद डिशमध्ये सूप प्यायला दिला.

पुनर्रचना केल्यानंतर खालीलपैकी कोणते वाक्य पाचवे असेल?

DIRECTION: Rearrange the following five sentences (P), (Q), (R), (S) and (T) in the proper sequence to form a meaningful paragraph; then answer the questions given below them.
P. The crane felt insulted and wanted to take revenge.
Q. He invited the fox to dine with him, and served boiled rice in a jug which he could not eat
R. A fox and crane were friends
S. The crane had a long beak, so could not take the soup, but the fox licked the dish.
T. One day, the fox invited the crane to dinner, and put the soup in a flat dish.

Which of the following should be the FIFTH sentence after rearrangement?

ہدایات: ان پانچ جملوں (P)، (Q)، (R)، (S) اور (T) کو با معنی پیرا بنانے کے لئے دوبارہ ترتیب دیجئے، پھر نیچے دے گئے سوالوں کے جواب دیجئے

P. سارس کو بےعزتی لگی اور وو بدلا لینا چاہتا تھا.
Q. اسنے لومڑی کو شام کے خانے کی دعوت دی، اور ابلا چاول جگ میں دیا جو وو کھا نہیں سکھتا تھا.
R. ایک لومڑی اور سارس دوست تھے.
S. سارس کی چونچ لمبھی تھی، اسلئے وو شور بہ نہی پی سکھتا تھا، لیکن لومڑی نے سارا کھانا کھا لیا.
T. ایک دن ، لومڑی نے سارس کو شام کے کھانے کی دعوت دی، اور شور بہ ایک ہموار برتن میں رکھا.

دوبارہ ترییب دینے کے بعد کون سا جملہ پانچوہ ہونا چاہیے؟

A.Q
A.Q
A.Q

B.R
B.R
B.R

C.S
C.S
C.S

D.T
D.T
D.T

Answer: A.Q
A.Q
A.Q

58 मॉझिल्ला फायरफॉक्स हे एक _____आहे

Mozilla Firefox is a/an –

موزیلا فائر فاکس

A.ऑपरेटींग सिस्टीम
A.Operating System
A.آپریٹنگ سسٹم ہے

B.वेब-ब्राऊजर
B.Web- Browser
B.ویب براؤزر ہے

C.हार्ड वेअर
C.Hardware
C. ہارڈوئر ہے

D.यांपैकी कोणतेही नाही
D.None of these
D.انمیں سے کوئی نہیں

Answer: B.वेब-ब्राऊजर
B.Web- Browser
B.ویب براؤزر ہے

59 सूचनाः दिलेल्या पर्यायांमधून ऍनालॉगस शब्द निवडा.

टेबल सॉल्ट आणि सोडीयम यांचे नाते आहे जसे बेकींग सोडा आणि ... यांचे आहे.

DIRECTIONS: Choose the analogous word from the given alternatives.

Table Salt is to Sodium Chloride as Baking Soda is to _____.

ہدایات: دیے گئے متبادل سے مطابق لفظ کا انتخاب کریں

کھانے کے نمک کا تعلق سوڈیم کلورائیڈ کے ساتھ وہی ہے جوکہ کھانے کے سوڈے کا --------- کے ساتھ.

A.पोटॅशियम क्लोराईड
A.Potassium Chloride
A. پوٹاشیم کلورائد

B.पोटॅशियम कार्बोनेट
B.Potassium Carbonate
B. پوٹاشیم کاربونیٹ

C.पोटॅशियम हायड्रॉक्साईड
C.Potassium Hydroxide
C. پوٹاشیم حیدڑوکسد

D.सोडीयम कार्बोनेट
D.Sodium Bi-carbonate
D. سوڈیم کاربونیٹ

Answer: D.सोडीयम कार्बोनेट
D.Sodium Bi-carbonate
D. سوڈیم کاربونیٹ

60 खालीलपैकी अशुद्ध वाक्य कोणते ?

A.बाबा छान तबला वाजवतात.

B.वीणा छान चित्र काढते.

C.गाडी फलाटावरून उशीरा आली.

D.विजयला मोटारीत बसायला आवडते.

Answer: C.गाडी फलाटावरून उशीरा आली.

61 P – O – X ही संकल्पना सुचवून मानसरोगतज्ञांचे मत असते की यामध्ये संतूलन असावे

By suggesting P – O – X concept the Psychologist is of opinion that there should be balance between

P – O – X کےتصورکا سُجھاؤ پیش کرکے ایک ماہر نفسیات یہ نظریہ قائم کرتا ہے _____کے مابین توازن ہونا چاہیے۔

A.व्यक्ती, इतर व्यक्ती आणि वस्तू मनोवृत्ती
A.Person, the other person & the attitude object
A.شخص ، دیگر شخص اور ایٹی ٹیوڈ آبجیکٹ

B.व्यक्ती, इतर व्यक्ती आणि कल्पकता
B.Person, the other person & imagination
B.شخص، دیگر شخص اور تصورات

C.व्यक्ती, त्रितीय व्यक्ती आणि कल्पना
C.Person, the third person & Idea
C. شخص، تیسرے شخص اور آئیڈیا

D.यापैकी सर्व
D.All of these
D.ان میں سے ہر ایک کے

Answer: A.व्यक्ती, इतर व्यक्ती आणि वस्तू मनोवृत्ती
A.Person, the other person & the attitude object
A.شخص ، دیگر شخص اور ایٹی ٹیوڈ آبجیکٹ

62 खालील प्रश्नात एक आकृतिबंध दाखविला आहे आणि तो कळीची आकृती म्हणून नोंदला आहे. कागदाच्या मागच्या बाजूने बघितल्यास मूळची कळीची आकृती अचूकपणे कशी दिसेल हे तुम्हाला ठरवायचे आहे.

DIRECTIONS: In the following question, a design is given, marked as key figure. You have to determine which e will be the exact view of the original key figure seen from the reverse side of the paper.

نیچے کے سوال میں نقش دیا گیا ہے، جس پر اہم شکل کا نشان لگا ہے آپ کو یہ طے کرنا ہے کہ اہم شکل کا قطعی منظر کاغذ کی الٹی طرف سے کونسا ہوگا؟

मुख्य आकृती
Main Figure
اصل شکل



उत्तरासाठी पर्यायी आकृत्या
Answer Figure
جوابی شکل

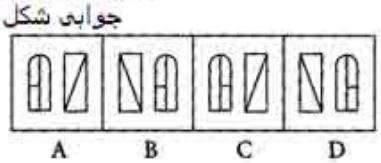

A. (A)

B. (B)

C. (C)

D. (D)

Answer: D. (D)

63 सूचना: खालील माहिती काळजीपूर्वक वाचा आणि खाली दिलेल्या प्रश्नांची उत्तरे द्या.
M, P, J, B, R, T आणि F एका वर्तुळात केंद्राबाध्ये बघत बसलेले आहेत. B हा J च्या डाव्या बाजूला तिसरा आहे जो M च्या डाव्या बाजूस दुसरा आहे. P हा B च्या डाव्या बाजूला तिसरा आणि R च्या उजव्या बाजूला दुसरा आहे. T हा M चा तत्काळ शेजारी नाही.
B च्या उजवीकडून तिसरा कोण आहे?

DIRECTIONS: Read the following information carefully and answer the questions that given below.
M, P, J, B, R, T and F are sitting around a circle facing at the centre. B is third to the left of J who is second to the left of M. P is third to the left of B and second to the right of R. T is not an immediate neighbour of M.
Who is third to the right of B?

ہدایات: مندرجہ ذیل معلومات کو دھیان سے پڑھیں اور نیچے دیے گئے سوالوں کے جواب دیں۔
M، P، J، B، R، T اور F مرکز کا رخ کیے ہوئے ایک دائرہ کے ارد گرد بیٹھےہوئے ہیں۔ B، J کے M کے بائیں سے تیسرا ہے جو کہ M کا فوری پڑوسی نہیں ہے۔ T، M کے دائیں سے دوسرا ہے۔ R کے بائیں سے تیسرا اور P، B بائیں سے دوسرا ہے۔
B کے دائیں سے تیسرا کون ہے؟

A.R
A.R
A.R

B.J
B.J
B.J

C.M
C.M
C.M

D.अपुरी माहिती
D.Data inadequate
D.ڈیٹا ناکافی ہے

Answer: B.J
B.J
B.J

64 निर्देशः खालील अंक-अक्षरी-चिन्ह क्रम यांचा काळजीपूर्वक अभ्यास करा आणि खालील प्रश्नांची उत्तरे द्या.

R * T J L 2 $ D = M # 8 C % B < K 1 & A W ? P E + Q @ 7 F 6

जर वरील व्यवस्थे ची पहिली पंधरा मूल्ये उलटवली गेली तर खालील पर्यायापैकी उजवी कडून एकविसावे घटक कोणते असेल?

DIRECTIONS: Study the following digit-letter-symbol sequence carefully and answer the questions given below.

R * T J L 2 $ D = M # 8 C % B < K 1 & A W? P E + Q @ 7 F 6

If the first fifteen elements in the above sequence is reversed then which of the following will be twenty-first from the right end?

ہدایت نیچے دی گی حرف نشان اور نمبرس کی ترتیب کو پڑھئے اور سوالات کا جواب دیجئے

R * T J L 2 $ D = M # 8 C % B < K 1 & A W ? P E + Q @ 7 F 6

اگر اپری ترتیب مے پہلے ۱۵ حرف کو الٹا ترتیب سے لکھایا جائے تو نے ترتیب مے سیدھے ہاتھ سے اکیسوا حرف کونسا ایگا ؟

A.=
A.=
A.=

B.2
B.2
B.2

C.L
C.L
C.L

D.$
D.$
D.$

Answer: B.2
B.2
B.2

65 एक मेगाबाइट म्हणजे जवळपास इतके आहे _____

One megabyte is equal to approximately ……..

ایک میگابائٹ تقریبا ---------- کے برابر ہے۔

A.1000 बिट्स
A.1000 bits
A.1000 بٹ

B.1000 बिट्स
B.1000 bytes
B.1000 بائٹ

C.1 दशलक्ष बिट्स
C.1 million bytes
C.1 ملین بائٹ

D.1 दशलक्ष बिट्स
D.1 million bits
D.1 ملین بٹ

Answer:
C.1 दशलक्ष बिट्स
C.1 million bytes
C.1 ملین بائٹ

66
सूचना: दिलेल्या पर्यायांमधून वेगळे ते बाहेर काढा.

DIRECTIONS: Find the odd one out from the given alternatives.

سمت: دیے گئے متبادل میں سے بے جوڑ کو تلاش کرو۔

A.सून
A.Daughter-in-law
A.بہو

B.आई
B.Mother
B.ماں

C.बहीण
C.Sister
C.بہن

D.मुलगी
D.Daughter
D.بیٹی

Answer:
A.सून
A.Daughter-in-law
A.بہو

67 जर शिक्षण सामग्री खूप प्रभावी आहे आणि ते दिल्या जाणाऱ्या धड्या बरोबर नियोजन द्वारे चांगल्या रित्या वाटले तर ह्याचे काय परिणाम होतील

If teaching material is most effective and it is interwoven effectively with the lesson planning then it results into—

اگر تدریسی مواد زیادہ مؤثر ہے اور سبق کی منصوبہ بندی کے ساتھ اسے مؤثر طریقے سے منتقل کیا جاتا ہے تو اس کے نتیجے میں—

A.वर्गातील शिक्षकांच्या बदली
A.Replacement of a teacher in the class
A.کلاس میں ایک استاد کی تبدیلی

B.विद्यार्थी वर्गाच्या बाहेर पडतील
B.Exit of students from the class
B.کلاس کے طالب علموں کا باہر نکلنا

C.परीक्षक परीक्षा वर्गातून बाहेर पडतील
C.Exit of examiners out of Examination Hall
C.امتحان ہال سے ممتحنین کا نکلنا

D.वरीलपैकी काहीही नाही
D.None of the above
D.اوپر میں سے کوئی نہیں

Answer: D.वरीलपैकी काहीही नाही
D.None of the above
D.اوپر میں سے کوئی نہیں

68 गुणाकार करा:
56842 × 657 = ?

Multiply :
56842 × 657 = ?

ضرب دیں:
56842 × 657= ?

A.34555421
A.34555421
A.34555421

B.37345194
B.37345194
B.37345194

C.23777657
C.23777657
C.23777657

D.45667633
D.45667633
D.45667633

Answer: B.37345194
B.37345194
B.37345194

69 सामान्यतः बाल-केंद्रीत शिकवण्याच्या पद्धतींमध्ये शिक्षकांची भूमिका आहे

Generally in Child-centred methods of teaching, the role of teacher is—

عام طور پر تدریس کے بچوں پر مبنی طریقوں میں، استاد کا کردار ہے-

A.समस्याप्रधान परिस्थिती निर्माण करणे
A.To formulate the problematic situations
A.دشوار حالتوں کو تشکیل دینے کے لئے

B.मुलांसाठी शक्य सामग्री आणि संसाधने एकत्रित करणे
B.To collect the possible material and resources for the children
B.بچوں کے لئے ممکنہ مواد اور وسائل جمع کرنے کے لئے

C.मुलांच्या त्यांच्या गृहितांची मांडणी करण्यास मदत करणे
C.To help the children in formulation of their hypotheses
C.بچوں کو ان کے مفروضے کی تشکیل میں مدد کرنے کے لئے

D.वरील सर्व
D.All the above
D.مذکورہ تمام

Answer: D.वरील सर्व
D.All the above
D.مذکورہ تمام

70 आपण क्लासमध्ये चार्ट दर्शवित असताना खालीलपैकी कोणती सावधगिरी आपण लक्षात ठेवू इच्छिता?

Which of the following precautions you would like to keep in mind while you are demonstrating a chart in the class?

جب آپ کلاس میں چارٹ کا مظاہرہ کر رہے ہیں تو آپ مندرجہ ذیل احتیاطی تدابیر میں سے کون سا دماغ رکھنا چاہتے ہیں؟

A.हे आपल्या विषयाशी संबंधित असावे आणि पुरेशी संबद्धता असणे आवश्यक आहे
A.It should be related with your topic and having adequate relevance
A.یہ آپ کے موضوع سے متعلق ہونا چاہئے اور کافی مطابقت رکھتا ہے

B.हे दसण्यात नैसर्गिक आणि वास्तववादी असावे
B.It should be natural and realistic in appearance
B.یہ اظہار میں قدرتی اور حقیقت پسندانہ ہونا چاہئے

C.ते अचूक आणि योग्य प्रमाणात असणे आवश्यक आहे
C.It must be accurate and in precise proportion
C.یہ درست اور عین مطابق ہونا ضروری ہے

D.वरील सर्व
D.All the above
D.مذکورہ تمام

Answer: D.वरील सर्व
D.All the above
D.مذکورہ تمام

71 'PRESENCE' या शब्दामध्ये अक्षरांच्या किती जोड्या आहेत, ज्यापैकी प्रत्येकीमध्ये वर्णमालेप्रमाणे शब्दामधील खूप अक्षरे आहेत?

How many pairs of letters are there in the word 'PRESENCE' each of which has as many letters between them in the word as in the alphabet?

لفظ 'PRESENCE' میں حروف کے ایسے کتنے جوڑے ہیں جنکے ہر ایک درمیان اتنے ہی حروف ہیں جتنے حروف تہجی میں؟

A.एक
A.One
A.One

B.दोन
B.Two
B.Two

C.तीन
C.Three
C.Three

D.चार
D.Four
D.Four

Answer: C.तीन
C.Three
C.Three

72 सूचना: खालील माहिती काळजीपूर्वक वाचा आणि खाली दिलेल्या प्रश्नांची उत्तरे द्या.
M, P, J, B, R, T आणि F एका वर्तुळात केंद्राबाध्ये बघत बसलेले आहेत. B हा J च्या डाव्या बाजूला तिसरा आहे जो M च्या डाव्या बाजूस दुसरा आहे. P हा B च्या डाव्या बाजूला तिसरा आणि R च्या उजव्या बाजूला दुसरा आहे. T हा M चा तत्काळ शेजारी नाही.
M च्या उजवीकडून चौथा कोण आहे?

DIRECTIONS: Read the following information carefully and answer the questions that given below.
M, P, J, B, R, T and F are sitting around a circle facing at the centre. B is third to the left of J who is second to the left of M. P is third to the left of B and second to the right of R. T is not an immediate neighbour of M.
Who is fourth to the right of M?

ہدایات: مندرجہ ذیل معلومات کو دھیان سے پڑھیں اور نیچے دیے گئے سوالوں کے جواب دیں۔
M، P، J، B، R، T اور F مرکز کا رخ کیے ہوئے ایک دائرہ کے ارد گرد بیٹھےہوئے ہیں۔ B، J کے M کے بائیں سے تیسرا ہے جو کہ P، B کے بائیں سے تیسرا اور R کے دائیں سے دوسرا ہے۔ T، M کا فوری پڑوسی نہیں ہے۔
M کے دائیں سے چوتھا کون ہے؟

A.B
A.B
A.B

B.T
B.T
B.T

C.J
C.J
C.J

D.यांपैकी कोणतीही नाही
D.None of these
D.ان میں سے کوئی نہیں

Answer: D.यांपैकी कोणतीही नाही
D.None of these
D.ان میں سے کوئی نہیں

73 गावामध्ये 60% कुटुंबांकडे गायी आहेत, 30% कुटुंबांकडे म्हशी आहेत आणि 15% कुटुंबांकडे गायी आणि म्हशी दोन्ही आहेत. एकत्रितपणे गावामध्ये 96 कुटुंब आहेत. किती कुटुंबांकडे गायी किंवा म्हशी नाहीत?

In a village 60% of families have a cow, 30% of families has buffalo and 15% of families have both a cow and a buffalo. In all there are 96 families in the village. How many families do not have a cow or a buffalo?

ایک گاؤں میں 60% خاندانوں کے پاس گائے ہیں، 30%خاندان کے پاس بھینس ہیں اور 15%خاندان کے پاس دونوں گائے اور بھینس ہیں.
تمام گاؤں میں 96 خاندان ہیں. کتنے خاندانوں کے پاس گائے یا بھینس نہیں ہے؟

A.20
A.20
A.20

B.24
B.24
B.24

C.26
C.26
C.26

D.28
D.28
D.28

Answer: B.24
B.24
B.24

74 जर 6 मुली एक ड्रेस 9 दिवसांत कशिदा करतात, तर तेच काम करण्यासाठी 3 मुलींद्वारे घेतलेल्या दिवसांची संख्या किती?

If 6 girls can embroider a dress in 9 days, then the number of days taken by 3 girls for the same work will be:

اگر 6 لڑکیاں ایک لباس کی کڑھائی 9 دن میں کرتی ہیں، تو 3 لڑکیوں کو اسی کام کے لیے کتنے دن درکار ہیں؟

A.14
A.14
A.14

B.18
B.18
B.18

C.20
C.20
C.20

D.15
D.15
D.15

Answer: B.18
B.18
B.18

75

$$\frac{(6)^3-(1)^3}{(6)^2+6+(1)^2}=?$$

A. 5

B. 4

C. 3

D. 2

Answer: A. 5

76 अध्यापन दरम्यान ह्यांच्या मध्ये संभाषण होतात

The communication in teaching is going on between —

تدریس میں مواصلات مسلسل درمیان میں چل رہا ہے —

A.शिक्षक आणि विद्यार्थी
A.Teacher and students
A.استاد اور طالب علم

B.शिक्षक आणि मुख्याध्यापक
B.Teacher and principal
B.استاد اور پرنسپل

C.विद्यार्थी आणि पालक
C.Student and parents
C.طالب علم اور والدین

D.वरिष्ठ आणि कनिष्ठ विद्यार्थी
D.Senior and junior students
D.سینئر اور جونیئر طلباء

Answer: A.शिक्षक आणि विद्यार्थी
A.Teacher and students
A.استاد اور طالب علم

77 निर्देश: खालील प्रश्नांमध्ये प्रश्न चिन्हाच्या (?) जागी कोणते अंदाजे मूल्य यायला हवे? (तुम्ही अचूक मूल्य काढण्याचे अपेक्षित नाही).
2/7 × 14/19 × 305=?

DIRECTIONS: What approximate value should come in place of the question mark (?) in the following questions? (You are not expected to calculate the exact value.).

2/7 × 14/19 × 305=?

ہدایات: مندرجہ ذیل سوال میں سوال کا نشان (?) کی جگہ پر کون سا تخمینہ ویلیو آئے گا - (آپ کو صحیح ویلیو نکالنے کی ضرورت نہیں ہے)
2/7 × 14/19 × 305=?

A.75
A.75
A.75

B.64
B.64
B.64

C.46
C.46
C.46

D.78
D.78
D.78

Answer: B.64
B.64
B.64

78 DIRECTIONS: A sentence with an underlined word is given below. Find the word which is opposite in meaning to the underlined word from the given options.
Symptoms of the illness include a high temperature and a persistent dry cough.

A.Eliminate

B.Incorporate

C.Comprise

D.Contain

Answer: A.Eliminate

79	ड्रान मॅन चाचणी यांच्या द्वारे विकसित केली गेली Draw a man test developed by ‘ڈرا اے مین ’ نامی ٹسٹ کا ارتقا ہوا بذریعہ:
	A.प्रमिला पाठक A.Pramila Pathak A. پرمیلا پاٹھک
	B.प्रयाग मेहता B.Prayag Mehta B.پریاگ مہتا
	C.आर. रामलिंगस्वामी C.R. Ramalinga swamy C. آر۔ رام لِنگا سوامی
	D.एम.सी. जोशी D.M.C. Joshi D.ایم۔سی۔ جوشی
Answer:	A.प्रमिला पाठक A.Pramila Pathak A. پرمیلا پاٹھک
80	बाकी 25 मिळविण्यासाठी कोणत्या संख्येला $\sqrt{00.25}$ ने भागले पाहिजे? Which number should be divided by $\sqrt{00.25}$ to get 25 as quotient? 25 بطور حاصل قسمت پانے کے لیے کس عدد کو $\sqrt{00.25}$ سے تقسیم کیا جانا چاہیے؟
	A. 25
	B. 50
	C. 12.5
	D. 125
Answer:	C. 12.5

81 निर्देश: खालील प्रश्न दिलेल्या शब्दांवर आधारित आहेत.

Hell/ Valuable/ Reify/ Plethoric/ Story

जर प्रत्येक शब्दासमोर S ठेवला तर किती अर्थपूर्ण शब्द तयार होतील:

DIRECTIONS: Following question is based on the given words.

Hell/ Valuable/ Reify/ Plethoric/ Story

If 'S' is placed before every word then how many meaningful words will be formed:

ہدایت جیل کے سوال دے ہے لفجونپر مشتمل ہیں

Hell/ Valuable/ Reify/ Plethoric/ Story

حرف ےس لگایا جائے تو کینے سہی لفج تیار ہونگے
'S'

A.एक
A.One
A.ایک

B.दोन
B.Two
B.دو

C.तीन
C.Three
C.تین

D.चार
D.Four
D.چار

Answer: A.एक
A.One
A.ایک

82 **सूचना**: खालील आकृतीचे प्रतिबिंब शोधून काढा.

DIRECTIONS: Find the mirror image of the figure given below.

ہدایات: نیچے دیئے گئے شکل کی آئینہ معکوس شکل کیا ہوگی۔

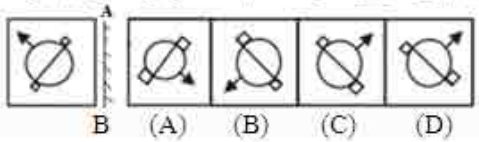

A. (A)

B. (B)

C. (C)

D. (D)

Answer: C. (C)

83 सूचना: खाली दिलेल्या प्रश्नात एक विधान आहे ज्याचे I आणि II असे दोन निष्कर्ष त्याखाली अंकित केलेले आहेत. या आधारे सर्वात योग्य पर्याय निवडा.

विधान:
सर्व प्राध्यापक हुशार आहेत. काही हुशार लोक ज्ञानी आहेत.

निष्कर्ष:
I. सर्व प्राध्यापक ज्ञानी आहेत.
II. सर्व ज्ञानी लोक प्राध्यापक आहेत.

DIRECTIONS: The question below has a statement followed by two conclusions numbered I and II. Based on this choose the option that is most suitable.

Statement:
All professors are intelligent. Some intelligent people are wise.

Conclusions:
I. All professors are wise.
II. All wise people are professors.

ہدایات: نیچے دیے گئے سوال میں ایک بیان کے بعد دو نتائج I اور II دیے گئے ہیں۔ اس کی بنیاد پرانتہائی موزوں آپشن کا انتخاب کیجیے۔

بیان:
تمام پروفیسرز ذہین ہیں. کچھ سمجھدار لوگ دانشور ہیں.

نتیجے:
I. تمام پروفیسر دانشور ہیں.
II. تمام دانشور پروفیسرز ہیں.

A.केवळ निष्कर्ष क्रमांक I विधानास अनुसरून आहे
A.Only Conclusion I follows
A.صرف نتیجہ I لاگو ہو گا۔

B.केवळ निष्कर्ष क्रमांक II विधानास अनुसरून आहे
B.Only Conclusions II follows
B. صرف نتیجہ II لاگو ہو گا۔

C.निष्कर्ष क्रमांक I किंवा II अनुसरून आहे
C.Either I or H follows
C. I یا II میں سے ایک لاگو ہو گا۔

D.कोणताही निष्कर्ष अनुसरून नाही
D.Neither I nor II follow
D. I اور II میں سے کوئی بھی لاگو نہیں ہو گا۔

Answer: D.कोणताही निष्कर्ष अनुसरून नाही
D.Neither I nor II follow
D. I اور II میں سے کوئی بھی لاگو نہیں ہو گا۔

84 जर P ही S आणि T ची आई आहे, R हा T चा मुलगा आहे, U हा P चा भाऊ आहे आणि Q हा R चा भाऊ आहे, तर P आणि Q यांचे नाते काय?

If P is the mother of S and T, R is the son of T, U is the brother of P and Q is the brother of R, how is P is related to Q?

اگر S P اور T کی ماں ہے، T R کا بیٹا ہے، P U کا بھائی ہے اور R Q کا بھائی ہے، P کا Q سے کیا رشتہ ہے؟

A.आई
A.Mother
A.ماں

B.आजी
B.Grandmother
B.دادی

C.मुलगी
C.Daughter
C.بیٹی

D.काकू
D.Aunt
D.چاچی

Answer: B.आजी
B.Grandmother
B.دادی

85 प्रश्नासाठी सूचना: खालील मालिका पूर्ण करा.

GKF, IPC, LTY, PWT, UYN,____

DIRECTION: Complete the following series.

GKF, IPC, LTY, PWT, UYN,____

سوال کے لیے ہدایت:مندرجہ ذیل سیریز کو مکمل کریں۔

GKF, IPC, LTY, PWT, UYN _____

A.ABZ
A.ABZ
A.ABZ

B.XBX
B.XBX
B.XBX

C.XAH
C.XAH
C.XAH

D.AZG
D.AZG
D.AZG

Answer: D.AZG
D.AZG
D.AZG

86 दिलेली अदलाबदल : चिन्हे -आणि ×, तसेच आकडे 3 आणि 2 ; तर 7 + 6 ÷ 3 × 2 – 4 चे मूल्य किती ?

Given interchanges: signs - and ×, and numbers 3 and 2; then the value of 7 + 6÷ 3 × 2 - 4 is

دیئے گئے تبادلے: علامات - اور ×، اور نمبر 3 اور 2؛ تو 7 + 6÷3×2 - 4کی تعداد ہے

A.-2
A.-2
A.-2

B.-6
B.-6
B.-6

C.4
C.4
C.4

D.-4
D.-4
D.-4

Answer: A.-2
A.-2
A.-2

87 सूचना: खालील प्रश्नांमध्ये दिलेल्या पर्यायांमधून संबंधित अक्षर/शब्द/संख्या निवडा.

गवत : हिरवा ::

DIRECTIONS: In the following question, select the related letter/word/number from the given alternatives.

Grass : Green ::

سمت: مندرجہ ذیل سوال میں، دیے گئے متبادل سے متعلقہ حرف/لفظ/نمبر منتخب کریں۔

:: گھاس : سبز

A.Rose : Branch
A.گلاب : شاخ

B.Sponge : Elastic
B.اسفنج : سوراخ دار

C.Diamond : Shine
C.ہیرا : چمک

D.Red : Blood
D.سرخ : خون

Answer: D.Red : Blood
D.سرخ : خون

88 शिक्षकांच्या शरीराची मुद्रा आणि ब्लॅक-बोर्ड यांच्यातील प्रमाणित कोन असावा

The proportion angle between teacher’s body posture and the Black-board should be—

-استاد کے جسم کے رخ اور بلیک بورڈ کے درمیان زاویہ کا تناسب ہونا چاہئے

A.अंदाजे 45°
A.45° approximately
A.45 تقریبا°

B.अंदाजे 300°
B.300 approximately
B.300 تقریبا

C.अंदाजे 120°
C.120° approximately
C.120 تقریبا°

D.अंदाजे 90°
D.90° approximately
D.90 تقریبا°

Answer: A.अंदाजे 45°
A.45° approximately
A.45 تقریبا°

89 जर '+' म्हणजे '×', '−' म्हणजे '+','x' म्हणजे '÷' आणि '÷'म्हणजे '−',तर या माहितीवर आधारित पुढील प्रश्नांची उत्तरे द्या.

If '+' means '×', '−' means '+','x' means '÷' and '÷' means '−', then answer the following questions based on this information.

اگر '+' مطلب 'X'، '-' مطلب '+'، 'X' مطلب '÷' اور ' ÷' مطلب '-'، تو نیچے لکھے ہوئے سوالوں کے جوابات اس بنیاد پر دیجئے۔

21 ÷ 8 + 2 − 12 × 3 = ?

A. 14

B. 9

C. 13.5

D. 11

Answer: B. 9

90 सूचना : खालील दिलेल्या प्रश्नामध्ये काही विधाने आणि काही निष्कर्ष आहेत. सामन्यात: ज्ञात तथ्यांपेक्षा ते वेगळे असतील तर दिलेली विधाने तुम्हाला सत्य मानवी लागतील आणि त्यानंतर दिलेल्या विधानाचे अनुकरण दिलेल्यापैकी कोणता निष्कर्ष तार्किकदृष्ट्या करतो ते ठरवा.

विधाने:
J < K ≥ O = Z

निष्कर्ष:
I. J> Z
II. Z ≤ K

DIRECTIONS: In the question given below, there are few statements followed by few conclusions. You have to take the given statements to be true even if they seem to be at variance with commonly known facts and then decide which of the given conclusion logically follow(s) from the given statements.

Statements:
J < K ≥ O = Z
Conclusions:
I. J > Z
II. Z ≤ K

ہدایات: مندرجہ ذیل سوال میں، کچھ بیانات کے بعد کچھ نتائج موجود ہیں. اگر آپ کو عام طور پر جانے جاتے حقائق کے ساتھ بھی متغیر ہونے لگے تو بھی آپ دئے گئے بیانات دماغ میں رکھیں اور پھر اس بات کا فیصلہ کریں کہ ذیل میں دیا گیا کونسا نتیجہ منطقانہ طور پر دیے گئے بیانات کی پیروی کرتا ہے.

بیانات:
J < K ≥ O = Z
نتائج:
J> Z .I
Z ≤ K .II

A.निष्कर्ष व II निष्कर्ष हे दोन्हीही खरे नाहीत
A.Neither conclusion I nor conclusion II is true
A.نہ ہی I نہ ہی II نتیجہ درست ہے

B.I किंवा II यापैकी एक निष्कर्ष खरा आहे
B.Either conclusion I or II is true
B.یا I یا II نتیجہ درست ہے

C.फक्त II निष्कर्ष खरा आहे
C.Only conclusion II is true
C.صرف نتیجہ II درست ہے

D.फक्त I निष्कर्ष खरा आहे
D.Only conclusion I is true
D.صرف نتیجہ I درست ہے

Answer: C.फक्त II निष्कर्ष खरा आहे
C.Only conclusion II is true
C.صرف نتیجہ II درست ہے

91 निर्देश: मालिका पूर्ण करा

AT, CR, ?, GN, IL

DIRECTION: Complete the series

AT, CR, ?, GN, IL

ہدایت اس سرج کو مکمّل کرو

AT, CR, ?, GN, IL

A.EP
A.EP
A.EP

B.PE
B.PE
B.PE

C.DP
C.DP
C.DP

D.PD
D.PD
D.PD

Answer: A.EP
A.EP
A.EP

92 दूधवाला दूधाची खरेदी किमतीला विक्री करतो पण तो त्यामध्ये पाणी (मुक्तपणे उपलब्ध) मिसळतो आणि त्यामुळे त्याला 9.09% नफा होतो. 1 लिटर मिश्रणामध्ये पाण्याचे प्रमाण किती आहे

A milkman sells the milk at the cost price but he mixes the water(freely available) in it and thus he gains 9.09%. The quantity of water in the mixture of 1 liter is

دودھ والے دودھ کو لاگتی قیمت پر فروخت کرتا ہے لیکن اس میں پانی (آزادانہ طور پر دستیاب) شامل ہوتا ہے اور اس طرح وہ 9.09% تک کا نفع کماتا ہے۔ 1 لیٹر کے مرکب میں پانی کی مقدار ہے

A.83.33 मिली
A.83.33 ml
A.83.33 ملی لیٹر

B.90.90 मिली
B.90.90 ml
B.90.90 ملی لیٹر

C.99.09 मिली
C.99.09 ml
C.99.09 ملی لیٹر

D.निश्चित करता येत नाही
D.Can’t be determined
D.معلوم نہیں ہو سکتا

Answer: A.83.33 मिली
A.83.33 ml
A.83.33 ملی لیٹر

93 निर्देश: खालील शब्दांची इंग्रजी शब्दकोशानुसार मांडणी करा.
(1) Intrinsic
(2) Intrude
(3) Intricate
(4) Introvert
(5) Intrigue
(6) Introduce

DIRECTIONS: Arrange the following words according to the English dictionary.
(1) Intrinsic
(2) Intrude
(3) Intricate
(4) Introvert
(5) Intrigue
(6) Introduce

ہدایت: انگریزی لغت کے مطابق مندرجہ ذیل الفاظ کو مرتب کریں۔

(1) Intrinsic
(2) Intrude
(3) Intricate
(4) Introvert
(5) Intrigue
(6) Introduce

A.3, 5, 1, 4, 6, 2
A.3, 5, 1, 4, 6, 2
A.3, 5, 1, 4, 6, 2

B.3, 5, 1, 6, 4, 2
B.3, 5, 1, 6, 4, 2
B.3, 5, 1, 6, 4, 2

C.3, 1, 5, 4, 6, 2
C.3, 1, 5, 4, 6, 2
C.3, 1, 5, 4, 6, 2

D.5, 1, 3, 2, 4, 6
D.5, 1, 3, 2, 4, 6
D.5, 1, 3, 2, 4, 6

Answer: B.3, 5, 1, 6, 4, 2
B.3, 5, 1, 6, 4, 2
B.3, 5, 1, 6, 4, 2

94 सूचना : खालील प्रत्येक प्रश्नात दोन विधाने I आणि II दिलेले आहेत. हे विधान एकतर स्वतंत्र कारण असू शकतात किंवा स्वतंत्र कारणांचे परिणाम असू शकतात. यांपैकी एक विधान इतर विधानाचा परिणाम असू शकतो. दोन्ही विधाने वाचा आणि खालीलपैकी कोणत्या उत्तराचा पर्याय या दोन्ही विधानांमधील संबंधांचे वर्णन करतो ते ठरवा.

विधान :
I. आपण पैशाने काहीही विकत घेऊ शकतो.
II. आज पैसा हा सर्वात महत्त्वाचा घटक आहे.

DIRECTIONS: Below in each question are given two statements I and II. These statements may be either independent causes or may be effects of independent causes. One of these statements may be the effect of the other statement. Read both the statements and decide which of the following answer choice correctly depicts the relationship between these two statements.

Statements:
I. We can get anything with money.
II. Today money is the most important element.

ہدایات: نیچے ہر سوال میں دو بیانات I اور II آ تو یہ بیانات یا تو آزاد وجوہات کے اثرات ہو سکتے ہیں۔ انہیں دیے گئے ہیں۔ بیانات میں سے ایک بیان دوسرے کا اثر ہو سکتا ہے۔دونوں بیانات پڑھیں اور فیصلہ کریں کہ نیچے دیے گئے کس جواب کا انتخاب ان دونوں بیانات کے درمیان تعلق کو ٹھیک سے ظاہر کرتا ہے۔

بیانات:
I – ہم پیسے سے کچھ بھی حاصل کر سکتے ہیں۔
II - آج پیسہ سب سے اہم عنصر ہے۔

A.I हा परिणाम आहे आणि II हे त्याचे तात्काळ आणि प्रमुख कारण आहे;
A.I is effect and II is its immediate and principal cause;
A. بیان نمبر I اثر ہے اور بیان نمبر II اس کی فوری اور بنیادی وجہ ہے۔

B.I हे तात्काळ आणि प्रमुख कारण आहे आणि II हा त्याचा परिणाम आहे;
B.I is the immediate and principal cause and II its effect;
B. بیان نمبر I بیان نمبر II فوری اور بنیادی وجہ ہے اور بیان نمبر اس کا اثر ہے۔

C.I हा परिणाम आहे परंतु II हे त्याचे तात्काळ आणि प्रमुख कारण नाही;
C.I is an effect but II is not its immediate and principal cause;
C. بیان نمبر I بیان نمبر II اثر ہے لیکن بیان نمبر اس کی فوری اور بنیادی وجہ نہیں ہے۔

D.II हा परिणाम आहे परंतु I हे त्याचे तात्काळ आणि प्रमुख कारण नाही;
D.II is an effect but I is not its immediate and principal cause;
D. بیان نمبر II بیان نمبر I اثر ہے لیکن بیان نمبر اس کی فوری اور بنیادی وجہ نہیں ہے۔

Answer: B.I हे तात्काळ आणि प्रमुख कारण आहे आणि II हा त्याचा परिणाम आहे;
B.I is the immediate and principal cause and II its effect;
B. بیان نمبر I بیان نمبر II فوری اور بنیادی وجہ ہے اور بیان نمبر اس کا اثر ہے۔

95 जर कालच्या दोन दिवस आधी रविवार होता. तर उद्यानंतर 3 दिवसांनी काय वार असेल?

If two days before yesterday was Sunday. What day will be 3 days after tomorrow?

اگرکل سے 2 دن پہلے اتوار تھا۔ تو کل کے بعد 3 دن سے کونسا دن ہوگا؟

A.शनिवार
A.Saturday
A.سنیچر

B.सोमवार
B.Monday
B.پیر

C.रविवार
C.Sunday
C.اتوار

D.मंगळवार
D.Tuesday
D.منگل

Answer: C.रविवार
C.Sunday
C.اتوار

96 **सूचना:** दिलेल्या पर्यायांमधून श्रेणी पूर्ण करणारी योग्य आकृती निवडा.

DIRECTIONS: Complete the series by choosing right figure from the given choices.

ہدایات: دیئے گئے اختیارات میں صحیح شکل کا انتخاب کر کے سیریز کو مکمل کیجئے۔

Problem Figures

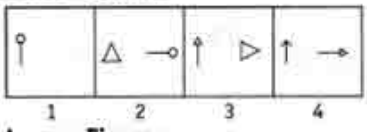

Answer Figures

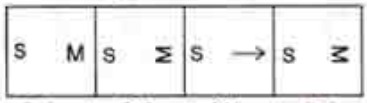

A. (A)

B. (B)

C. (C)

D. (D)

Answer: D. (D)

97 ब्लॅक-बोर्डच्या मुख्य प्रकार आहेत

The main types of Black-board are—

-تختہ سیاہ کی اہم اقسام ہیں

A.लाकडी ब्लॅक-बोर्ड
A.Wooden Black-boards
A.لکڑی کے تختہ سیاہ

B.सिमेंट ब्लॅक-बोर्ड
B.Cement Black-boards
B.سیمنٹ کے تختہ سیاہ

C.काचेचे ब्लॅक बोर्ड
C.Glass Black-boards
C.شیشےکے تختہ سیاہ

D.वरील सर्व
D.All the above
D.مذکورہ تمام

Answer:

D.वरील सर्व
D.All the above
D.مذکورہ تمام

98 भरतपूर पक्षी अभयारण्य कोणत्या राज्यात आहे?

Bharatpur Bird Sanctuary is located in which state?

بھرتپر برڈ سینکچری کس ریاست میں واقع ہے؟

A.कर्नाटक
A.Karnataka
A. کرناٹک

B.ओरिसा
B.Orissa
B. اڑیسہ

C.केरळ
C.Kerala
C. کیرالہ

D.राजस्थान
D.Rajasthan
D. راجستھان

Answer:

D.राजस्थान
D.Rajasthan
D. راجستھان

99 खालीलपैकी कोणामध्ये अपूर्णांक उतरत्या क्रमाने दिले आहेत?

Which one of the following has fractions in descending order ?

مندرجہ ذیل کسور میں سے کون سی ترتیب نزولی میں ہے؟

(A) $\frac{8}{9}, \frac{9}{11}, \frac{4}{7}, \frac{3}{5}$

(B) $\frac{4}{7}, \frac{3}{5}, \frac{9}{11}, \frac{8}{9}$

(C) $\frac{3}{5}, \frac{4}{7}, \frac{9}{11}, \frac{8}{9}$

(D) $\frac{8}{9}, \frac{9}{11}, \frac{3}{5}, \frac{4}{7}$

Answer: (D) $\frac{8}{9}, \frac{9}{11}, \frac{3}{5}, \frac{4}{7}$

100 सूचना: प्रत्येक प्रश्नाला एक प्रमुख विधानासोबत चार विधाने आहेत ज्यांच्याखाली A, B, C आणि D असे चार विधान आहेत. क्रमवार विधानांची जोडी निवडा ज्यामध्ये प्रथम विधान दुसऱ्या विधानाला सुचवते, आणि दोन्ही विधाने तर्किकदृष्ट्या प्रमुख विधानासोबत निगडित असेल.

ती एकतर कथा लिहिते किंवा जीवनचरित्र लिहिते.
A. ती कथा लिहीत नाही.
B. ती कथा लिहिते.
C. ती जीवनचरित्र लिहिते.
D. ती जीवनचरित्र लिहित नाही.

DIRECTIONS: Each question has a main statement followed by four statements labelled A, B, C and D. Choose the ordered pair of statements, where the first statement implies the second, and the two statements are logically consistent with the main statement.

She writes either stories or biographies
A. She did not write stories
B. She wrote stories
C.She wrote biographies
D.She did not write biographies

ہدایت: ہر سوال میں ایک جملہ ہے جسکے بعد چار جملےاے، بی،سی اور ڈی کے نام سے دئے گئے ہیں اسمیں منسلک جوڑیوں کو چنئے۔ جہاں پہلا جملہ دوسرے جملہ کی اور اشارہ کر رہا ہے اور دو جملے منطقی مرکزی بیان کے مطابق ہیں

وہ یا کہانیاں لکھتی ہے یا آپ بیتیاں
A۔ اس نے کہانیاں نہیں لکھیں
B۔ اس نے کہانیاں لکھیں
C۔ اس نے آپ بیتیاں لکھیں
D۔ اس نے آپ بیتیاں نہیں لکھیں

A.AD
A.AD
A.AD

B.DB
B.DB
B.DB

C.CA
C.CA
C.CA

D.AB
D.AB
D.AB

Answer: B.DB
B.DB
B.DB

101 40 मुलांच्या रांगेत, उजवीकडून सतीश 25 व्या क्रमांकावर आहे. तर डावीकडून सतीश किती क्रमांकावर उभा असेल ?

In a row of 40 boys, Satish is 25th from the right end. What is the position of Satish from left end?

40 لڑکوں کی کتار میں ، ستیش دھانے سے 25 وا تھا. بھانے سے ستیش کہ کیا مقام تھا؟

A.(a) 10 व्या
A.10th
A.10th

B.(b) 15 व्या
B.15th
B.15th

C.(c) 30 व्या
C.30th
C.30th

D.(d) 16 व्या
D.16th
D.16th

Answer: D.(d) 16 व्या
D.16th
D.16th

102 Out of the given options, choose the one which is the correct passive voice of the sentence given below.
Had I completed the assignment?

A.Had the assignment been completed by me?

B.Have the assignment been completed by me?

C.Was the assignment complete by me?

D.Was the assignment being completed by me?

Answer: A.Had the assignment been completed by me?

103 मूलभूत कर्तव्याची संकल्पना याच्या संविधानातून घेण्यात आली आहे:

The concept of fundamental duties has been taken from the Constitution of:

بنیادی فرائض کا تصور --------- کے آئین سے لیا گیا ہے:

A.अमेरिका
A.America
A. امریکہ

B.रशिया
B.Russia
B. روس

C.इंग्लंड
C.England
C. انگلینڈ

D.जर्मनी
D.Germany
D. جرمنی

Answer: B.रशिया
B.Russia
B. روس

104 मॅनग्रोव्ज काय आहेत?

What are the mangroves?

مینگرو کیا ہیں؟

A.अतीउच्च वन
A.High Altitude Forests
A.انتہائی اونچے جنگل

B.दलदलीचा वन
B.Swamp Forests
B. دلدلی جنگل

C.थॉर्न वन
C.Thorn Forests
C.تھارن جنگل

D.वरीलपैकी एकही नाही
D.None of the above
D. مندرجہ بالا میں سے کوئی نہیں

Answer: B.दलदलीचा वन
B.Swamp Forests
B. دلدلی جنگل

105 **सूचना**: दिलेल्या पर्यायांमधून श्रेणी पूर्ण करणारी योग्य आकृती निवडा.

DIRECTIONS: Complete the series by choosing right figure from the given choices.

ہدایات: دیئے گئے اخیارات میں سے صحیح شکل کو چن کر سلسلہ کو مکمل کیجیئے

Problem Figures

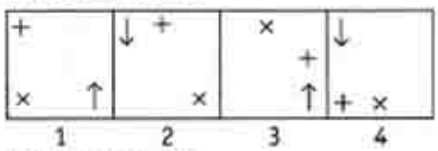

Answer Figures

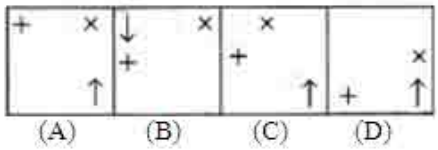

A. (A)

B. (B)

C. (C)

D. (D)

Answer: B. (B)

106 Fill in the blank with the correct article.
She plays both _____violin and piano beautifully.

A.the

B.a

C.an

D.No article required

Answer: A.the

107 यापैकी कोणती आकृती वांगे, मांस, भाज्या दर्शवते?

Which one of the following represents Brinjal, Meat, Vegetables?

ذیل میں سے کونسا ایک بینگن، گوشت، سبزیوں کی نمائندگی کرتا ہے؟

(A) 

(B) 

(C) 

(D) 

Answer: (D) 

108 सहजप्रवृत्त जीवनात आवेज जे ‘आयडी’ला उत्साहित करतात त्यांना म्हणतात

The instinctual life forces that evergises the “Id” is called as

فطری حیاتی قوتیں جو ’شناخت‘ کو قوت بہم پہنچاتی ہیں، انہیں کہا جاتا ہے:

A.अती अहंकार
A.Super Ego
A. اعلی خودی

For More Info And Videos About TAIT-Exam Syllabus And Other Exam Visit My Channel
TAIT च्या 30 प्रश्नपत्रिका PDF
BADSHAHimp Available Request 9765226781
WWW.YouTube.com/BADSHAHimp
Subscribe My Channel

B.प्रक्षेपक
B.Projection
B.مظاہرہ

C.कामवासना
C.Libido
C.جنسی طلب

D.सुसूत्रीकरण
D.Rationalization
D. تاویل

Answer: C.कामवासना
C.Libido
C.جنسی طلب

109 दिलेल्या आकृती मधील गहाळ संख्या शोधा.
Find the missing term in the given figure.
. نیچے کے دایرے مے سے گمنام نمبر کھوجے



A. 28

B. 30

C. 35

D. 27

Answer: B. 30

For More Info And Videos About TAIT-Exam Syllabus And Other Exam Visit My Channel
TAIT च्या 30 प्रश्नपत्रिका PDF
BADSHAHimp Available Request 9765226781
WWW.YouTube.com/BADSHAHimp
Subscribe My Channel

110 सूचना: खालील माहिती काळजीपूर्वक वाचा आणि खाली दिलेल्या प्रश्नांची उत्तरे द्या.
M, P, J, B, R, T आणि F एका वर्तुळात केंद्राबाध्ये बघत बसलेले आहेत. B हा J च्या डाव्या बाजूला तिसरा आहे जो M च्या डाव्या बाजूस दुसरा आहे. P हा B च्या डाव्या बाजूला तिसरा आणि R च्या उजव्या बाजूला दुसरा आहे. T हा M चा तत्काळ शेजारी नाही.
T च्या डावी कडून दुसरा कोण आहे?

DIRECTIONS: Read the following information carefully and answer the questions that given below.
M, P, J, B, R, T and F are sitting around a circle facing at the centre. B is third to the left of J who is second to the left of M. P is third to the left of B and second to the right of R. T is not an immediate neighbour of M.
Who is second to the left of T?

ہدایات: مندرجہ ذیل معلومات کو دھیان سے پڑھیں اور نیچے دیے گئے سوالوں کے جواب دیں۔
M، P، J، B، R، T اور F مرکز کا رخ کیے ہوئے ایک دائرہ کے ارد گرد بیٹھےہوئے ہیں۔ B، J کے M کے بائیں سے تیسرا ہے جو کہ P، B کے بائیں سے تیسرا اور R کے دائیں سے دوسرا ہے۔ T، M کا فوری پڑوسی نہیں ہے۔ بائیں سے دوسرا ہے۔
T کے بائیں سے دوسرا کون ہے؟

A.F
A.F
A.F

B.M
B.M
B.M

C.P
C.P
C.P

D.J
D.J
D.J

Answer: A.F
A.F
A.F

For More Info And Videos About TAIT-Exam Syllabus And Other Exam Visit My Channel
BADSHAHimp TAIT च्या 30 प्रश्नपत्रिका PDF Available Request 9765226781
YouTube WWW.YouTube.com/BADSHAHimp Subscribe My Channel

111 निर्देश: खाली दिलेले प्रश्न वर्ण मालिकेवर आधारित आहेत. या प्रत्येक मालिकेत, काही अक्षरे गहाळ आहेत. योग्य पर्याय निवडा पाच पेक्षा अधिक अक्षरे गहाळ असल्यास, मालिकेतील शेवटचे पाच अक्षरे निवडा .

ab - - - bc — e — c — — ab — — a — —

DIRECTION: Questions given below are based on the letter series. In each of these series, some letters are missing. Select the correct alternative. If more than five letters are missing, select the last five letters of the series:

ab - - - bc — e — c — — ab — — a — —

ہدایت نیچے دے ہے سوالات حرف سرج پر مشتمل ہیں . ہر میں کہیں حرف گمشدہ ہے . سہی اختیارات کو چنے . اگر پچ حرف گنمام ہو تو آخری پانچ حرفونکو چنے

ab - - - bc — e — c — — ab — — a — —

A.cbade
A.cbade
A.cbade

B.deabc
B.deabc
B.deabc

C.edacb
C.edacb
C.edacb

D.edcba
D.edcba
D.edcba

Answer: B.deabc
B.deabc
B.deabc

112 भीमसेन जोशी हे _____ प्रख्यात होते

Bhimsen Joshi was an eminent –

بھیمسین جوشی ایک مشہور

A.सतारवादक
A.Sotarist
A.ستار بجانے والے ہیں

B.बासरी वादक
B.Flutist
B.بانسری بجانے والے ہیں ۔

C.गायक
C.Singer
C.گایک ہیں ۔

D.सरोद – वादक
D.Sarod – Player
D.سرود بجانے والے ہیں۔

Answer: C.गायक
C.Singer
C.گایک ہیں ۔

113 Out of the four alternatives, choose the one which can be substituted for the given words/sentence.
A slow sad song often sung at a funeral

A.Dirge

B.Grave

C.Epitaph

D.Mortuary

Answer: A.Dirge

114 खालीलपैकी कोणती जगातील सर्वात मोठी पानथळ पद्धत आहे?

Which among the following is the World’s largest Wetland System?

دنیا کا سب سے بڑا دلدلی نظام مندرجہ ذیل میں سے کون سا ہے؟

A.पंतनल
A.Pantanal
A.پنٹانل

B.एव्हग्लॅंडेस
B.Everglades
B.ایورگلیڈس

C.ओकावेंग
C.Okavango
C.اوکا وینگو

D.कॅमेर्ग्यू
D.Camargue
D.کیمرگو

Answer: A.पंतनल
A.Pantanal
A.پنٹانل

115 विधान:
इंटरनेट मुलांसमोर वेगवेगळ्या कल्पना उलगडत आहे आणि त्यांना भारतीय संस्कृतीचे ज्ञान नाही.

कृतीचा कोर्स:
I. मुलांना इंटरनेट वापरण्यापासून रोखू नका
II. मुलांना भारतीय संस्कृतीबद्दल शिकविणे प्रारंभ करा.

Statement:
Internet is exposing children to different ideas and they have no knowledge of Indian culture.
Course of actions:
I. Stop children from using internet.
II. Start teaching children about Indian culture.

بیان:
انٹرنیٹ کی وجہ سے بچے مختلف نظریات سیکھ رہے ہیں اور انہیں انڈین کلچر کے بارے میں کوئی پتہ نہیں ہے۔

لائحہ عمل:
I۔ بچوں کو انٹرنیٹ کے استعمال سے روکیں۔
II۔ بچوں کو انڈین کلچر کے بارے میں تعلیم دینا شروع کر دیں۔

A.फक्त I अनुसरून आहे
A.Only I follows
A. صرف I لاگو ہو گا۔

B.फक्त II अनुसरण करते आहे
B.Only II follows
B. صرف II لاگو ہو گا۔

C.एकतर I किंवा II अनुसरून आहे
C.Either I or II follows
C. I یا II میں سے ایک لاگو ہو گا۔

D.I किंवा II दोन्हीपैकी काहीही अनुसरण करत नाही
D.Neither I nor II follows
D. I اور II میں سے کوئی بھی لاگو نہیں ہو گا۔

Answer: B.फक्त II अनुसरण करते आहे
B.Only II follows
B. صرف II لاگو ہو گا.

116 नर्तक खेळाडू कारागीर यांसारखी उदाहरणे या अंतर्गत मांडता येतात

Examples such a dancing athletes craftsman can e put under

مثال کے طور پر اس طرح کے ڈانسنگ ایتھلیٹ اپنے اندر رکھ سکتا ہے

A.आंतरिक बुद्धिमत्ता
A.intrapersonal intelligence
A.افراد کے مابین کی ذہانت

B.भाषिक बुद्धिमत्ता
B.Linguistic intelligence
B. زبانی ذہانت

C.सर्वसामानविषयक बुद्धिमत्ता
C.spatial intelligence
C.مکانی قابلیت

D.शारीरिक किमयात्मक
D.bodily kinesthetic
D. جسمانی عضلاتی حس

Answer: D.शारीरिक किमयात्मक
D.bodily kinesthetic
D. جسمانی عضلاتی حس

117 'स्वास्थ्य' या शब्दाचा समानार्थी शब्द कोणता ?

A.आजार

B.दगदग

C.त्रास

D.आरोग्य

Answer: D.आरोग्य

118	‘विस्मृती’ या शब्दाचा विरुद्धार्थी शब्द कोणता ?
	A.विसर
	B.आठवण
	C.विस्मरण
	D.भूल
Answer:	B.आठवण

119	ओडीडी आहे – ODD is او ڈی ڈی ہے
	A.अपोजिसनल डिफायन्ट डिसऑर्डर A.Oppositional defiant disorder A.متضاد دفاعی خرابی کی شکایت
	B.अपोजिसनल डिफेंस डिसऑर्डर B.Oppositional defence disorder B.متضاد دفاعی خرابی کی شکایت
	C.ऑक्यूपेशनल डिफेंस डिसऑर्डर C.Occupational defence disorder C.پیشہ ورانہ دفاعی خرابی کی شکایت
	D.अपोजिसनल डेवलपमेंट डिसऑर्डर D.Oppositional development disorder D.مخالف ترقیاتی خرابی کی شکایت
Answer:	A.अपोजिसनल डिफायन्ट डिसऑर्डर A.Oppositional defiant disorder A.متضاد دفاعی خرابی کی شکایت

120 सूचना: दोन विधाने आणि त्यानंतर चार निष्कर्ष, I, II, III आणि IV दिले आहेत. ही विधाने सामान्यतः ज्ञात वस्तुस्थितीपेक्षा भिन्न असली तरी सत्य आहेत असे समजा. दिलेल्यापैकी कोणता निष्कर्ष दिलेल्या विधानांवरुन नक्की काढता येऊ शकतो हे तुम्ही ठरवायचे आहे.तुमचे उत्तर सूचित करा.
विधाने:
(a) सर्व क्लार्क टायपिस्ट आहेत.
(b) काही टायपिस्ट्स स्टेनो आहेत.
निष्कर्ष:
I. काही स्टेनोज क्लार्क आहेत.
II. एकही स्टेनो क्लार्क नाही.
III. सर्व टायपिस्ट्स क्लार्क आहेत.
IV. सर्व क्लार्क स्टेनोज आहेत.

DIRECTION: Two statements are given following by four conclusions, I, II, III and IV. You have to consider that statements to be true, even if they seem to be at variance from commonly known facts. You are to decide which of the given conclusions can definitely be drawn from the given statements. Indicate your answer.

Statements:
(a) All clerks are typists.
(b) Some typists are stenos.

Conclusion:
I. Some stenos are clerk
II. No steno is a clerk.
III. All typist are clerks.
IV. All clerks are stenos.

ہدایات: دو سٹیٹمنٹ جوکہ چار خلاصوں پر مشتمل ہیں .I،II، III اور IV. اپ کو وہ سٹیٹمنٹ درست ماننا ہے، اگرچہ دکہنے میں وہ بہت سارے حقاٰق ست مطبقت رکہتی ہو۔ اپ کو دیے گے خلاصوں میں سے یقینی طور پر اسے اختیار کرنا ہے جو سٹیٹمنٹ سے نکلا ہو. اپنا جواب تلاش کرے

اظہار بیان:
تمام کلرک ٹایپ کرنے والے ہیں
کچہ ٹیپ کرنے والے تنگ نظر ہیں

نتائج:
I کچہ تنگ نظر کلرک ہیں ۔
II کوی تنگ نظر کلرک نہیں ہے۔
III تمام ٹایپ کرنے والے کلرک ہیں۔
IV تمام کلرک تنگ نظر ہیں۔

A.सर्व निष्कर्ष अनुसरण करा
A.All the conclusion follow
A.تمام خلاصے درست ہیں

B.निष्कर्षांचे कोणतेही अनुसरण नाही
B.None of conclusion follow
B.کوی خلاصہ درست نہیں ہے

C.एकतर मी किंवा दुसरा खालीलप्रमाणे
C.Either I or II follows
C.یا اپ II درست ہے

D.केवळ IV असे टाइप करते
D.Only IV follows
D.صرف IV درست ہے

Answer: C.एकतर मी किंवा दुसरा खालीलप्रमाणे
C.Either I or II follows
C.یا اپ II درست ہے

121 सूचना: अर्थपूर्ण परिच्छेद निर्माण करण्यासाठी, खाली दिलेली (P), (Q) (R), (S) आणि (T) ही पाच वाक्ये योग्य अनुक्रमाने पुनर्रचना करा; त्यांनतर खालील प्रश्नांची उत्तर द्या.
P. बगळ्याला अपमान वाटला आणि त्याने बदला घायचे ठरविले.
Q. त्याने कोल्ह्याला आपल्यासोबत जेवणासाठी आमंत्रित केले आणि शिजविलेला भात एका सुरईमध्ये दिला. त्यामुळे कोल्हा खाऊ शकला नाही.
R. कोल्हा आणि बगळा दोघे मित्र होते.
S. बगळ्याला लांब चोच होती, त्यामुळे तो सूप पिऊ शकला नाही, पण कोल्ह्याने आपले डिश चाटून पुसुन खाल्ली.
T. एक दिवशी कोल्ह्याने बगळ्याला जेवायला आमंत्रित केले आणि रुंद डिशमध्ये सूप प्यायला दिला.

पुनर्रचना केल्यानंतर खालीलपैकी कोणते वाक्य तिसरे असेल?

DIRECTION: Rearrange the following five sentences (P), (Q), (R), (S) and (T) in the proper sequence to form a meaningful paragraph; then answer the questions given below them.
P. The crane felt insulted and wanted to take revenge.
Q. He invited the fox to dine with him, and served boiled rice in a jug which he could not eat
R. A fox and crane were friends
S. The crane had a long beak, so could not take the soup, but the fox licked the dish.
T. One day, the fox invited the crane to dinner, and put the soup in a flat dish.

Which of the following should be the THIRD sentence after rearrangement?

ہدایات: ان پانچ جملوں (P)، (Q)، (R)، (S) اور (T) کے سوالوں کے کو با معنی پیرا بنانے کے لئے دوبارہ ترتیب دیجئے، پھر نیچے دے گئے جواب دیجئے

P. سارس کو بےعزتی لگی اور وو بدلا لینا چاہتا تھا.
Q. اسنے لومڑی کو شام کے خانے کی دعوت دی، اور ابلا چاول جگ میں دیا جو وو کھا نہیں سکھتا تھا.
R. ایک لومڑی اور سارس دوست تھے.
S. سارس کی چونچ لمبھی تھی، اسلئے وو شور بہ نہی پی سکھتا تھا، لیکن لومڑی نے سارا کھانا کھا لیا.
T. ایک دن ، لومڑی نے سارس کو شام کے کھانے کی دعوت دی، اور شور بہ ایک ہموار برتن میں رکھا.

دوبارہ ترییب دینے کے بعد کون سا جملہ تیسرا ہونا چاہیے؟

A.S
A.S
A.S

B.P
B.P
B.P

C.Q
C.Q
C.Q

D.T
D.T
D.T

Answer: A.S
A.S
A.S

122 सारख्या अनुलंब कोनासह दोन समद्विभुज त्रिकोणाची क्षेत्रफळे 25:49 या गुणोत्तरात आहेत. त्यांच्या उंचीमधील गुणोत्तर काय असेल?

The areas of two isosceles triangle with same vertical angle are in the ratio 25 : 49. What is the ratio of their altitudes?

اسی عمودی اینگل کے ساتھ دو متساوی الساقین مثلث کا رقبہ 25: 49 کے تناسب میں ہیں۔ انکی اونچائی کا تناسب کیا ہے؟

A.5:7
A.5:7
A.5:7

B.25:49
B.25:49
B.25:49

C.5:14
C.5:14
C.5:14

D.7:5
D.7:5
D.7:5

Answer: A.5:7
A.5:7
A.5:7

123 ‘ किती शुभ्र ससा आहे हा !’ या वाक्यातील विशेषण ओळखा.

A.किती

B.शुभ्र

C.ससा

D.आहे हा !

Answer: B.शुभ्र

124 सूचना: या प्रश्नांमध्ये पर्याय A आणि B यांच्या सहित दोन विधाने दिलेली आहेत. जरी सामान्यपणे माहीत असलेल्या तथ्यांबरोबर जुळत नसले तरी खालील विधाने बरोबर आहेत असे समजून तुमचे योग्य उत्तर लिहा:
सर्व मदय पाणी आहे.
कोणतेही पाणी कडू नाही. म्हणून,
A: कोणतेही मदय कडू नाही.
B: कोणतीही कडू गोष्ट मदय नाही.

DIRECTION: In these questions, two statements are given, followed by two inferences A and B. Assume the statements to be true even if they are at variance with the known facts and then mark your answer as:

All liqour is water.
No water is bitter. So,
A: No liquor is bitter.
B: No bitter is liqour.

ہدایت:ان سوالات میں، دو بیانات دیے گئے ہیں، جن کے بعد دو تجاویز A اور B دیے گئے ہیں۔ بیانات کے درست ہونے کو تسلیم کریں اگرچہ وہ عام طور پر معلوم حقائق کے برعکس ہوں اور پھر اس کے مطابق اپنا جواب نشان زد کریں:

تمام شراب پانی ہے۔
کوئی پانی کڑوا نہیں ہے۔ لہذا،

A: کوئی شراب کڑوی نہیں ہے۔
B: کوئی کڑوی چیز شراب نہیں ہے۔

A.जर केवळ पर्याय (A) असल्यास.
A.If only inference (A) follows
A.صرف تجویز (A) پیروی کرتا ہے۔

B.जर केवळ पर्याय (B) असल्यास.
B.If only inference (B) follows
B.صرف تجویز (B) پیروی کرتا ہے۔

C.जर दोन्ही पर्याय (A) आणि (B) असल्यास.
C.If both (A) and (B) follow
C.(A) اور (B) دونوں پیروی کرتے ہیں۔

D.जर दोन्ही पर्याय (A) आणि (B) नसल्यास.
D.If neither (A) nor (B) follows
D.نہ تو (A) نہ ہی (B) پیروی کرتے ہیں۔

Answer: C.जर दोन्ही पर्याय (A) आणि (B) असल्यास.
C.If both (A) and (B) follow
C.(A) اور (B) دونوں پیروی کرتے ہیں۔

125 केशव पूर्वेला 20 मी. चालत जातो, मग उजवीकडे वळतो आणि 30 मी. जातो. मग तो डावीकडे वळतो आणि 50 मी. चालतो. तर आता त्याचे तोंड कुठल्या दिशेला आहे?

Keshav walks 20m to East, and then turns right and walks 30m. Then he turns left and walks 50 m. Now, which direction is he facing?

کیشو مشرق کی طرف 20 میٹر چلتا ہے، پھر دائیں مڑتا ہے اور 30 میٹر جاتا ہے۔ پھر وہ بائیں مڑتا ہے اور 50 میٹر چلتا ہے۔ اب اس کا رخ کس سمت میں ہے؟

A.पश्चिम
A.West
A.مغرب

B.पूर्व
B.East
B.مشرق

C.उत्तर
C.North
C. شمال

D.यांपैकी कोणतीही नाही
D.None of these
D.ان میں سے کوئی نہیں

Answer: B.पूर्व
B.East
B.مشرق

126 श्रुती उत्तर दिशेने चालावयास सुरूवात करते आणि काही अंतर चालल्यावर ती डावीकडे वळते मग उजवीकडे वळते. त्यानंतर ती पुन्हा डावीकडे वळते, आता ती कोणत्या दिशेने चालत असेल?

Shruti starts walking in the north direction and after walking some distance she took a left turn followed by a right turn. After that she took left turn, now she is walking in which direction?

شروتی شمال کی طرف چلنا شروع کرتی ہے اور کچھ دیر چلنے کے بعد وہ الٹے ہاتھ پہ مڑجاتی ہے اور پھر وہ سیدھے ہاتھ پہ اور پھر الٹے ہاتھ کی طرف گھوم جاتی ہے تو اب وہ کس سمت چل رہی ہے؟

A.दक्षिण
A.South
A.جنوبی

B.उत्तर
B.North
B.شمال

C.पूर्व
C.East
C.مشرق

D.पश्चिम
D.West
D.مغرب

Answer: D.पश्चिम
D.West
D.مغرب

127 सूचना: खालील प्रश्नांमध्ये दिलेल्या पर्यायांमधून संबंधित अक्षर/शब्द/संख्या निवडा.

14 : 20 :: 16 : ?

DIRECTIONS: In the following question, select the related letter/word/number from the given alternatives.

14 : 20 :: 16 : ?

سمت: مندرجہ ذیل سوال میں، دیے گئے متبادل سے متعلقہ حرف/لفظ/نمبر منتخب کریں۔

14 : 20 :: 16 : ?

A.22
A.22
A.22

B.48
B.48
B.48

C.10
C.10
C.10

D.32
D.32
D.32

Answer: A.22
A.22
A.22

128 खालीलपैकी शुद्ध वाक्य कोणते ?

A.आपल्या समाजाला किती कमालीच दारिद्र्य आहे.

B.आपल्या समाजात किती कमालीचं दारिद्र्य आहे.

C.आपल्या समाजात किती कमालीमधे दारिद्र्य आहे.

D.आपल्या समाजात किती कमालीला दारिद्र्य आहे.

Answer: B.आपल्या समाजात किती कमालीचं दारिद्र्य आहे.

129 सूचना: खालील प्रश्नात उत्तरातील पर्यायांपैकी कोणत्या पर्यायी आकृतीत प्रश्नातील आकृती अंतर्भूत आहे?

DIRECTIONS: In the given question find the answer figure in which question figure is embedded.

ہدایات: دیئے گئے سوال میں، جواب کی شکل کو دریافت کیجیئے جو سوال میں سرایت کر گئی ہے۔

Question Figure **Answer Figures**

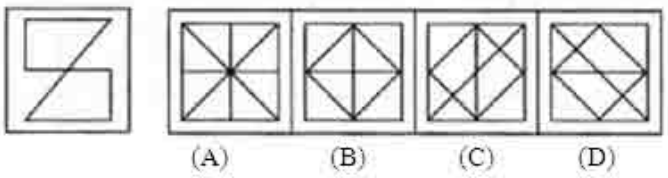

A. (A)

B. (B)

C. (C)

D. (D)

Answer: A. (A)

130 यापैकी कोणी मुलांमधील बुद्धिमत्ता मोजण्यासाठी पद्धतशीर चाचणी तयार केली?

Who amongst these devised systematic tests to measure intelligence of children?

ان میں سے کس نے بچوں کی ذہانت جانچنے کیلیے منظم ٹسٹ ایجاد کیے؟

A.डेव्हिड वेक्स्लर
A.David Wechsler
A. ڈیوڈ ویکسلر

B.गॅल्टन
B.Galton
B.گیلٹن

C.बेनेट
C.Benet
C. بنٹ

D.हॉवर्ड गार्डनर
D.Howard Gardner
D.ہاورڈ گارڈنر

Answer: A.डेव्हिड वेक्स्लर
A.David Wechsler
A. ڈیوڈ ویکسلر

131 प्रास्ताविक प्रश्न असे असले पाहिजे

The introductory questions should

تعارف سوالات ہونا چاہئے

A.विद्यार्थ्यांच्या पूर्वीच्या ज्ञानावर आधारित
A.Be based on previous knowledge of the students
A.طالب علموں کے سابقہ علم پر مبنی ہو

B.कठीण नसून सोपे
B.Be easy and not difficult
B.آسان ہو اور مشکل نہ ہو

C.एका शृंखलेत असले पाहिजेत
C.Have linkage
C.منسلک ہو

D.वरील सर्व
D.All of the above
D.مذکورہ تمام

Answer: D.वरील सर्व
D.All of the above
D.مذکورہ تمام

132 खालील आकृतीमध्ये त्रिकोण मुली दर्शवतो, चौरस खेळाडू दर्शवतो आणि वर्तुळ-प्रशिक्षक. आकृतीचा कोणता भाग खेळाडू असलेल्या परंतु प्रशिक्षक नसलेल्या मुली दर्शवतो?

In the following figure triangle represents 'girls', square players and circle-coach. Which part of the diagram represents the girls who are player but not coach?

مندرجہ ذیل ڈایاگرام میں مثلث 'لڑکیوں'، مربع کھلاڑیوں اور حلقہ کوچ کی نمائندگی کرتا ہے. ڈایاگرام کا کون سا حصہ لڑکیوں کی نمائندگی کرتا ہے جو کھلاڑی ہیں لیکن کوچ نہیں؟

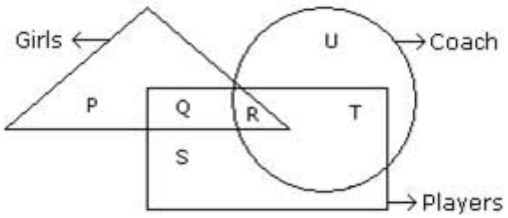

A. P

B. Q

C. R

D. S

Answer: B. Q

133

सूचना: खालील प्रश्नात कागदाच्या एक तुकड्याला प्रश्नातील आकृतीत दाखविल्याप्रमाणे घडी घातली आहे. उत्तरादाखल पर्यायांमधून अशी आकृती निवडा जी भोक पडल्यानंतर उलगडलेल्या कागदाचे स्वरूप दाखवेल.

DIRECTIONS: In the following question a piece of paper is folded in the manner shown in the question figure(s). Select the figure out of the answer choices showing the unfolded pattern after the punches (cut).

ہدایات: نیچے دیئے گئے سوالوں میں کاغذ کا ایک ٹکڑا اس طرح جوڑا گیا ہے جیسے سوال کی شکل میں بتایا گیا ہے، دیئے گئے جوابات کے اختیارات میں سے اس طرح انتخاب کیجیئے کہ کٹ لگانے کے بعد بغیر جوڑا ہوا پیٹرن دکھائی دے۔

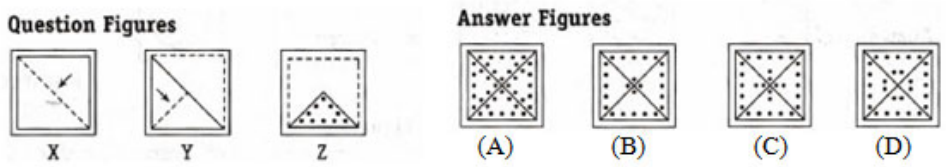

A. (A)

B. (B)

C. (C)

D. (D)

Answer: A. (A)

134

काझीरंगा राष्ट्रीय उद्यान प्रसिद्ध आहे -

Kaziranga National Park is famous for -

کاجیرنگا قومی پارک مشہور ہے -

A.गेंडे
A.Rhinos
A.گینڈا

B.वाघ
B.Tiger
B. ٹائیگر

C.हरण
C.Deer
C. ہرن

D.हत्ती
D.Elephant
D. ہاتھی

Answer: A.गेंडे
A.Rhinos
A.گینڈا

135 ऋषी स्वतःला वर्गातील इतरांपासून वेगळे ठेवतो, तर तुम्ही

Rishi keeps himself isolated from the rest of the class, you would

رشی خود کو باقی کلاس سے خود کو الگ تھلگ رکھتا ہے، آپ کریں گے

A.मूळ कारण समजून घेण्याचा प्रयत्न करा
A.try to understand the underlying clause
A. وہاں موجود شق کو سمجھنے کی کوشش کرتا ہے

B.त्याला इतर विद्यार्थ्यांपासून अधिक वेगळे ठेवाल
B.keep him more separated from other student
B.دوسرے طالب علموں سے مزید الگ رکھیں

C.मुख्याध्यापकांना माहिती देण्यात यावी
C.principal should be informed
C.پرنسپل کو مطلع کرنا چاہئے

D.वरीलपैकी कोणतेही नाही
D.none of the above
D. درج بالا میں سے کوئی نہیں

Answer: A.मूळ कारण समजून घेण्याचा प्रयत्न करा
A.try to understand the underlying clause
A. وہاں موجود شق کو سمجھنے کی کوشش کرتا ہے

136 शिक्षण पद्धत काय आहे?

What is a teaching method?

ایک طریقہ تدریس کیا ہے؟

A.कला
A.An Art
A.ایک فن

B.विज्ञान
B.A Science
B.ایک سائنس

C.कला आणि विज्ञान दोन्ही
C.Both Art and Science
C.فن اور سائنس دونوں

D.काही सांगू शकत नाही
D.Can't say
D.کچھ نہیں کہہ سکتا

Answer: C.कला आणि विज्ञान दोन्ही
C.Both Art and Science
C.فن اور سائنس دونوں

137 1 सेकंदाला मिनिटांमध्ये रूपांतरित करा.

Convert 1 second into min?

1سیکنڈ کو منٹ میں بدلیں؟

A.0.016667 मि
A.0.016667 min
A.0.06667منٹ

B.0.026667 मि
B.0.026667 min
B.0.026667منٹ

C.0.015667 मि
C.0.015667 min
C.0.15667منٹ

D.0.013667 मि
D.0.013667 min
D.0.013667منٹ

Answer: A.0.016667 मि
A.0.016667 min
A.0.06667منٹ

138 $p^2+5p+6=0$ या वर्गसमीकरणाची मुळे आहेत:

The roots of the quadratic equation $p^2+5p+6=0$ are:

$p^2+5p+6=0$ مربع مساوات کے روٹ ہیں:

A.3, 2
A.3, 2
A.3, 2

B.-3, 2
B.-3, 2
B.-3, 2

C.3, -2
C.3, -2
C.3, -2

D.-3, -2
D.-3, -2
D.-3, -2

Answer: D.-3, -2
D.-3, -2
D.-3, -2

139 $\sqrt{109}$, $\sqrt{107}$,$\sqrt{82}$ आणि $\sqrt{790}$ मध्ये सर्वात मोठा कोण आहे?

Which is the largest among $\sqrt{109}$, $\sqrt{107}$,$\sqrt{82}$ and $\sqrt{790}$

$\sqrt{109}$, $\sqrt{107}$,$\sqrt{82}$ اور $\sqrt{790}$ کے مابین سب سے بڑا عدد کون سا ہے

(A) $\sqrt{109}$

(B) $\sqrt{107}$

(C) $\sqrt{82}$

(D) $\sqrt{790}$

Answer: (D) $\sqrt{790}$

140 सुर्याला सर्वात जवळचे ग्रह आहे-

The closest planet to the sun is

سورج کے سب سے قریب سیارہ ہے

A.पृथ्वी
A.Earth
A.ارتھ

B.बुध
B.Mercury
B.مرکری

C.नेपच्यून
C.Neptune
C.نیپٹیون

D.मंगळ
D.Mars
D.مارس

Answer: B.बुध
B.Mercury
B.مرکری

141 सूचना: खालील प्रश्नांमध्ये दिलेल्या पर्यायांमधून संबंधित अक्षर/शब्द/संख्या निवडा.

पुरुष : मुलगा : : स्त्री : ?

DIRECTIONS: In the following question, select the related letter/word/number from the given alternatives.

Man : Boy : : Woman : ?

سمت: مندرجہ ذیل سوال میں، دیے گئے متبادل سے متعلقہ حرف/لفظ/نمبر منتخب کریں۔

آدمی : لڑکا : : عورت : ؟

A.मुलगी
A.Girl
A.لڑکی

B.मुलगी
B.Daughter
B.بیٹی

C.भाची
C.Niece
C.بھتیجی

D.आई
D.Mother
D.ماں

Answer: A.मुलगी
A.Girl
A.لڑکی

142 फॉर्मिक आम्ल याद्वारे तयार केले जाते-

Formic acid is produced by—

فورمک ایسڈ _____ سے پیدا ہوتا ہے۔

A.वाळवी
A.White ants
A.سفید چیونٹی

B.झुरळे
B.Cockroaches
B.کاکروچ

C.लाल मुंग्या
C.Red ants
C.لال چیونٹی

D.डास
D.Mosquitoes
D.مچھر

Answer: C.लाल मुंग्या
C.Red ants
C.لال چیونٹی

143 A ही B ची मुलगी आहे. B ही Q ची बहीण आहे. तर Q ला किती चुलत बहिणी आहेत?

A is the daughter of B. B is the sister of Q. How many niece does Q have?

B A کی بیٹی ہے. Q B کی بہن ہے. Q کی کتنی بھانجیاں ہے؟

A.एक
A.One
A.ایک

B.दोन
B.Two
B.دو

C.तीन
C.Three
C.تین

D.यापैकी नाही
D.None of these
D.ان میں سے کوئی نہیں

Answer: A.एक
A.One
A.ایک

144 विशालित आणि आभासी प्रतिमा मिळविण्यासाठी हा आरसा वापरतो-

To get the magnified and virtual image mirror is used—

بڑی اور مجازی تصویر حاصل کرنے کے لئے آئنہ کا استعمال کیا جاتا ہے

A.समतल आरसा
A.Plane Mirror
A.پلین آئنہ

B.बहिर्वक्रआरसा
B.Convex Mirror
B.کنویکس آئنہ

C.अंतर्गोलआरसा
C.Concave Mirror
C.کنکیو آئنہ

D.अंतर्गोलभिंग
D.Concave Lens
D.کنکیو لینس

Answer: C.अंतर्गोलआरसा
C.Concave Mirror
C.کنکیو آئنہ

145 अनुक्रम: 25, 15, 5, …….चे 5वे पद शोधा:

Find the 5th term of the sequence: 25, 15, 5,…….

25 , 15 ,5 ……. :اس سرج کی پانچوی ٹرم کیا ہے؟,

A.-45
A.-45
A.-45

B.-55
B.-55
B.-55

C.-50
C.-50
C.-50

D.-15
D.-15
D.-15

Answer: D.-15
D.-15
D.-15

146 5 वर्षांनंतर, वडीलांचे वय हे त्यांच्या मुलाच्या तिप्पट होईल. पाच वर्षांपूर्वी वडीलांचे वय त्यांच्या मुलाच्या वयाच्या 7 पट होते. वडीलांचे वर्तमान वय काय आहे (वर्षांमध्ये)?

After 5 years, the age of father will be thrice that of his son. Five years ago father's age was 7 times as old as his son.What is the present age of the father (in years)?

5 سال بعد، والد کی عمر اُس کے بیٹے کی عمر 3 گنا ہو گی۔5 سال پہلے والد کی عمر 7 گنا زیادہ ہے بیٹے کی عمر کے۔ والد کی موجودہ عمر (سالوں میں) کیا ہے؟

A.35
A.35
A.35

B.36
B.36
B.36

C.40
C.40
C.40

D.44
D.44
D.44

Answer: C.40
C.40
C.40

147 सूचना: प्रत्येक प्रश्नाला एक प्रमुख विधानासोबत चार विधाने आहेत ज्यांच्याखाली A, B, C आणि D असे चार विधान आहेत. क्रमवार विधानांची जोडी निवडा ज्यामध्ये प्रथम विधान दुसऱ्या विधानाला सुचवते, आणि दोन्ही विधाने तर्किकदृष्ट्या प्रमुख विधानासोबत निगडित असेल.

ती एकतर उशीरा उठते किंवा लवकर उठते
A. ती उशीरा उठली.
B. ती उशीरा उठली नाही.
C. ती लवकर उठली.
D. ती लवकर उठली नाही.

DIRECTIONS: Each question has a main statement followed by four statements labelled A, B, C and D. Choose the ordered pair of statements, where the first statement implies the second, and the two statements are logically consistent with the main statement.

She either wakes up late or early .
A. She woke up late
B. She did not wake up late
C. She woke up early
D. She did not wake up early

ہدایت: ہر سوال میں ایک جملہ ہے جسکے بعد چار جملےاے، بی،سی اور ڈی کے نام سے دئے گئے ہیں اسمیں منسلک جوڑیوں کو چنئے۔ جہاں پہلا جملہ دوسرے جملہ کی اور اشارہ کر رہا ہے اور دو جملے منطقی مرکزی بیان کے مطابق ہیں

وہ یا تو جلدی اٹھتی ہے یا دیر سے
A۔ وہ لیٹ اٹھی
B۔ وہ لیٹ نہیں اٹھی
C۔ وہ جلدی اٹھی
D۔ وہ جلدی نہیں اٹھی

A.BD
A.BD
A.BD

B.DA
B.DA
B.DA

C.CA
C.CA
C.CA

D.AB
D.AB
D.AB

Answer: B.DA
B.DA
B.DA

148 सूचना: दिलेल्या पर्यायांमधून वेगळे ते बाहेर काढा.

DIRECTIONS: Find the odd one out from the given alternatives.

سمت: دیے گئے متبادل میں سے بے جوڑ کو تلاش کرو۔

A.ट्युलिप
A.Tulip
A.گل لالہ

B.गुलाब
B.Rose
B.گلاب

C.कळी
C.Bud
C.کلی

D.डेझी
D.Daisy
D.گل داؤدی

Answer: C.कळी
C.Bud
C.کلی

149 Out of the given four words only one is spelt correctly. Find the word that is correctly spelt.

A.Colleague

B.Pavillion

C.Athleate

D.Olampics

Answer: A.Colleague

150 सूचना: दिलेल्या पर्यायांमधून वेगळे ते बाहेर काढा.

DIRECTIONS: Find the odd one out from the given alternatives.

سمت: دیے گئے متبادل میں سے بے جوڑ کو تلاش کرو۔

A.30
A.30
A.30

B.52
B.52
B.52

C.10
C.10
C.10

D.20
D.20
D.20

Answer: B.52
B.52
B.52

151 Qची आई ही R ची बहीण आणि S ची मुलगी आहे, N ही R ची मुलगी आहे आणि M ची बहीण आहे. मग N चे S सोबत नाते काय?

Q’s mother is the sister of R and daughter of S, N is the daughter of R and sister of M. How N is related to S?

Q کی ماں R کی بہن اور S کی بیٹی ہے، R N کی بیٹی ہے اور M کی بہن ہے. N کا S سے کیا رشتہ ہے؟

A.मुलगा
A.Son
A.بیٹا

B.मुलाचा मुलगा
B.Son’s Son
B.بیٹے کا بیٹا

C.भाऊ
C.Brother
C.بھائی

D.नात
D.Grand-daughter
D.پوتی

Answer: D.नात
D.Grand-daughter
D.پوتی

152 खालील आकृतीमध्ये किती चौरस आहेत?

How many squares are there in the following figure?

نیچے دی ہوئی شکل میں کتنی مربع ہیں؟

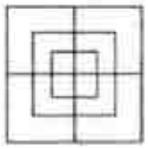

A. 13

B. 14

C. 15

D. 16

Answer: C. 15

153 5 च्या पहिल्या तीन गुणितांची सरासरी आहे:

Average of first three multiples of 5 is:

5-کے پہلے تین ملٹیپلز کا اوسط ہے

A.10
A.10
A.10

B.12
B.12
B.12

C.84
C.84
C.84

D.31
D.31
D.31

Answer: A.10
A.10
A.10

154 **सूचना:** खालील प्रश्नात असे 3 घटक आहेत ज्यांचा परस्परांशी विशिष्ट संबंध आहे. समान संबंध वर्तुळाच्या संचांनी दर्शविलेला आहे, प्रत्येक वर्तुळ त्याचा आकार कितीही असला तरी, एका घटकाचे प्रतिनिधित्व करते. योग्य वर्तुळाच्या संचांशी खालील घटकांच्या जोड्या लावा.

DIRECTION: The question below has three items having certain relationship among them. The same relationship is expressed by sets of circles, each circle representing one item irrespective of its size. Match the items with right set of circles.

ہدایت: مندرجہ ذیل سوال میں تین آئٹم ہیں جن کے مابین مختلف تعلقات ہیں۔ دائروں کے ایک سیٹ کے ذریعہ یکساں تعلق ظاہر کیا جاتا ہے، ہر دائرہ سائز سے قطع نظر ایک آئٹم کی نمائندگی کرتا ہے۔ آئٹم کو دائروں کے درست سیٹ کے ساتھ ملائیں



घोडा, कोंबडी, प्राणी
Horse, Hen, Animal
گھوڑا، مرغی، جانور

A. (A)

B. (B)

C. (C)

D. (D)

Answer: D. (D)

155 'किफायत' या शब्दाचा समानार्थी शब्द कोणता ?

A.नफा

B.तोटा

C.बूड

D.नुकसान

Answer: A.नफा

156 "विंग्ज ऑफ फायर" चे लेखक कोण आहेत?

Who is the author of the book “Wings of Fire”?

’’ونگس آف فائر‘‘ کے مصنف ہیں

A.रस्कीन बॉंड
A.Ruskin Bond
A.رسکن بانڈ۔

B.एपीजे अब्दुल कलाम
B.APJ Abdul Kalam
B.اے پی جے عبد الکلام۔

C.अरुंधती रॉय
C.Arundhati Roy
C.آرنڈھتی رو

D.मनमोहन सिंघ
D.Manmohan Singh
D.من موہن سنگھ

Answer:
B.एपीजे अब्दुल कलाम
B.APJ Abdul Kalam
B.اے پی جے عبد الکلام۔

157 $4^x = 256$ असल्यास, x चे मूल्य आहे:

If $4^x = 256$, then value of x is:

اگر $4^x=256$، تو x کا مان ہوگا

A.6
A.6
A.6

B.9
B.9
B.9

C.4
C.4
C.4

D.7
D.7
D.7

Answer:	C.4 C.4 C.4

158	कोपनहेगन ही _____ची राजधानी आहे Copenhagen is the capital of – کوپن ہیگن راجدھانی
	A.क्युबा A.Cuba A.کیوبا کی۔
	B.डेन्मार्क B.Denmark B.ڈین مارک کی ۔
	C.इजिप्त C.Egypt C.مصر کی ۔
	D.फिनलँड D.Finland D.فن لینڈ کی
Answer:	B.डेन्मार्क B.Denmark B.ڈین مارک کی ۔

159	खालीलपैकी शुद्ध शब्द कोणता ?
	A.खंडोगणती
	B.खडोगणती
	C.खंडोगनती
	D.खंडोगीणती
Answer:	A.खंडोगणती

160 एका महिन्यामध्ये सालेमने रू. 50000 कमविले आणि रू. 35000 ची बचत केली. तिने बचत केलेल्या पैशाचा तिने खर्च केलेल्या पैशाशी गुणोत्तर शोधा.

In a month Salem earns Rs 50000 and saves Rs 35000. Find the ratio of money that she saves to the money she spends?

ایک مہینہ میں سلیم 50000 کماتا ہے اور 35000 کی بچت کرتا ہے۔ اس کے ذریعہ خرچ کی جانے والی رقم کے مقابلہ میں بچت کی رقم کا تناسب معلوم کریں؟

A.7:3
A.7:3
A.7:3

B.3:4
B.3:4
B.3:4

C.5:3
C.5:3
C.5:3

D.3:5
D.3:5
D.3:5

Answer: A.7:3
A.7:3
A.7:3

161 विधान:
विद्यार्थी अधिक राजकीयदृष्ट्या सक्रिय होत आहेत.

कृतीचा कोर्स:
I. महाविद्यालये आणि विद्यापीठांमध्ये विद्यार्थी राजकीय कामकाजात सामील होण्यावर बंदी आणली पाहिजे.
II. विद्यापीठे आणि महाविद्यालयांविरूद्ध कठोर कारवाई केली जाईल ज्यामध्ये विद्यार्थी राजकीयदृष्ट्या सक्रिय होत आहेत.

Statement:
Students are becoming more politically active.

Course of actions:
I. Students in colleges and universities should be banned from involving in political activities.
II. Strict action should be taken against universities and colleges in which students are becoming politically active

بیان:
طلباء سیاسی طور پر زیادہ سرگرم ہو رہے ہیں۔

لائحہ عمل:
I۔کالجوں اور یونیورسٹیوں کے طلباء کی سیاسی سرگرمیوں میں شمولیت پر پابندی عائد ہونی چاہیے۔
II۔ ایسے کالجوں اور یونیورسٹیوں کے خلاف سخت کاروائی کی جانی چاہیے جہاں طلباء سیاسی طور پر سرگرم ہو رہے ہیں ۔

A.फक्त I अनुसरून आहे
A.Only I follows
A. صرف I لاگو ہو گا۔

B.फक्त II अनुसरण करते आहे
B.Only II follows
B. صرف II لاگو ہو گا۔

C.एकतर I किंवा II अनुसरून आहे
C.Either I or II follows
C. I یا II میں سے ایک لاگو ہو گا۔

D.I किंवा II दोन्हीपैकी काहीही अनुसरण करत नाही
D.Neither I nor II follows
D. I اور II میں سے کوئی بھی لاگو نہیں ہو گا۔

Answer: D.I किंवा II दोन्हीपैकी काहीही अनुसरण करत नाही
D.Neither I nor II follows
D. I اور II میں سے کوئی بھی لاگو نہیں ہو گا۔

162	246 × 254 =? 246 × 254 =? 246 × 254 =?
	A.26484 A.26484 A.26484
	B.624984 B.624984 B.624984
	C.61484 C.61484 C.61484
	D.62484 D.62484 D.62484
Answer:	D.62484 D.62484 D.62484
163	सूचना: खालील प्रश्नांमध्ये दिलेल्या पर्यायांमधून संबंधित अक्षर समूह निवडा. ACFJ : 1369 :: EGJN : ? DIRECTIONS: In the following question, select the related group of letters from the given alternatives. ACFJ : 1369 :: EGJN : ? سمت: مندرجہ ذیل سوال میں، دیے گئے متبادل میں سے حروف کا متعلقہ گروپ منتخب کریں۔ ACFJ : 1369 :: EGJN : ?
	A.101154 A.101154 A.101154
	B.567891 B.567891 B.567891

C.681012
C.681012
C.681012

D.571014
D.571014
D.571014

Answer: D.571014
D.571014
D.571014

164 साधारणतया ह्यांच्या साठी व्याख्यानाच्या शिकवण पध्दती सर्वोत्तम पद्धती मानली जाते

Generally Lecture method is assumed as the best method for—

عام طور پر ان کے لئے لیکچر کا طریقہ بہترین طریقہ سمجھا جاتا ہے—

A.हायस्कूल विद्यार्थ्यां साठी
A.High school students
A.ہائی اسکول کے طلباء

B.इंटरमिजिएट विद्यार्थ्यां साठी
B.Intermediate students
B.انٹرمیڈیٹ طلباء

C.ग्रॅज्युएट विद्यार्थ्यां साठी
C.Graduates students
C.گریجویٹ طلبہ

D.वरील सर्व
D.All of the above
D.مذکورہ تمام

Answer: C.ग्रॅज्युएट विद्यार्थ्यां साठी
C.Graduates students
C.گریجویٹ طلبہ

165 Out of the given four words only one is not spelt correctly. Find the word that is not correctly spelt.

A.Carribean

B.Luxurious

C.Mysterious

D.Manufacture

Answer: A.Carribean

166 सूचना: अर्थपूर्ण परिच्छेद निर्माण करण्यासाठी, खाली दिलेली (P), (Q) (R), (S) आणि (T) ही पाच वाक्ये योग्य अनुक्रमाने पुनर्रचना करा; त्यांनतर खालील प्रश्नांची उत्तर द्या.
P. बगळ्याला अपमान वाटला आणि त्याने बदला घायचे ठरविले.
Q. त्याने कोल्ह्याला आपल्यासोबत जेवणासाठी आमंत्रित केले आणि शिजविलेला भात एका सुरईमध्ये दिला. त्यामुळे कोल्हा खाऊ शकला नाही.
R. कोल्हा आणि बगळा दोघे मित्र होते.
S. बगळ्याला लांब चोच होती, त्यामुळे तो सूप पिऊ शकला नाही, पण कोल्ह्याने आपले डिश चाटून पुसुन खाल्ली.
T. एक दिवशी कोल्ह्याने बगळ्याला जेवायला आमंत्रित केले आणि रुंद डिशमध्ये सूप प्यायला दिला.

पुनर्रचना केल्यानंतर खालीलपैकी कोणते वाक्य पहिले असेल?

DIRECTION: Rearrange the following five sentences (P), (Q), (R), (S) and (T) in the proper sequence to form a meaningful paragraph; then answer the questions given below them.
P. The crane felt insulted and wanted to take revenge.
Q. He invited the fox to dine with him, and served boiled rice in a jug which he could not eat
R. A fox and crane were friends
S. The crane had a long beak, so could not take the soup, but the fox licked the dish.
T. One day, the fox invited the crane to dinner, and put the soup in a flat dish.

Which of the following should be the FIRST sentence after rearrangement?

ہدایات: ان پانچ جملوں (P)، (Q)، (R)، (S) اور (T) کو با معنی پیرا بنانے کے لئے دوبارہ ترتیب دیجئے، پھر نیچے دے گئے سوالوں کے جواب دیجئے

P. سارس کو بےعزتی لگی اور وو بدلا لینا چاہتا تھا.
Q. اسنے لومڑی کو شام کے خانے کی دعوت دی، اور ابلا چاول جگ میں دیا جو وو کھا نہیں سکھتا تھا.
R. ایک لومڑی اور سارس دوست تھے.
S. سارس کی چونچ لمبھی تھی، اسلئے وو شور بہ نہی پی سکھتا تھا، لیکن لومڑی نے سارا کھانا کھا لیا.
T. ایک دن ، لومڑی نے سارس کو شام کے کھانے کی دعوت دی، اور شور بہ ایک ہموار برتن میں رکھا.

دوبارہ ترییب دینے کے بعد کون سا جملہ پہلے ہونا چاہیے؟

A.R
A.R
A.R

B.Q
B.Q
B.Q

C.P
C.P
C.P

D.S
D.S
D.S

Answer: A.R
A.R
A.R

167 जर टीव्हीला एअर कंडीशनर म्हटले, एअर कंडीशनरला फोन म्हटले, फोनला कान म्हटले, कानाला ओठ म्हटले आणि ओठांना फॅक्स मशिन म्हटले. तर कुणाशीतरी बोलताना आपण खालीलपैकी कशाचा वापर करु शकतो?

If television is called air conditioner, air conditioner is called phone, phone is called ear, ear is called lips and lips are called fax machine. Which of the following we can use for talking some-one?

اگر ٹیلی ویژن کو ایر کنڈیشنر، ایر کنڈیشنر کو ٹیلیفون، ٹیلیفون کو کان، کان کو ہونٹ اور ہونٹ کو فیکس مشین کہا جائے، تو ہم لوگوں سے بات کرنے کے لیے مندرجہ ذیل میں سے کیسے استعمال کرتے ہیں؟

A.फोन
A.Phone
A.ٹیلیفون

B.कान
B.Ear
B.کان

C.ओठ
C.lips
C.ہونٹ

D.एअर कंडिशनर
D.air conditioner
D.ایئر کنڈیشنز

Answer: B.कान
B.Ear
B.کان

168 डब्ल्यूडब्ल्यूडब्ल्यू चे आविष्कारक-

Inventor of WWW is -

WWW کا موجود---- ہے۔

A.बिल गेट्स
A.Bill Gates
A.بل گیٹس

B.एन. रेस्क्ल
B.N. Resscl
B.این۔ ریسکل

C.ली. एन. फेयाँग
C.Lee. N. Feyong
C.لی این فیئنگ

D.टिम बर्नर्स ली
D.Tim Berners Lee
D.ٹم بارنرس لی

Answer:

D.टिम बर्नर्स ली
D.Tim Berners Lee
D.ٹم بارنرس لی

169 अॅलेक्स असे मानतो की लोकांवर प्रामुख्याने परिस्थितीचा प्रभाव होतो आणि ते अनुभव प्राप्त करतात, म्हणजेच त्याचा असा विश्वास आहे की मानवी विकासात _____हे निसर्गापेक्षा जास्त महत्त्वाची भूमिका वठवते

Alex believes people are primarily influenced by the environment and earn experiences, so he believes _____ plays a more powerful role in human development then nature

الیکس کا ماننا ہے کہ لوگ ابتدائی طور پر ماحولیات سے متاثر ہوتے ہیں اور تجربہ حاصل کرتے ہیں، اس طرح وہ یقین کرتے ہیں_____ انسان کی ترقی میں فطرت کے مقابلہ زیادہ طاقتور کردار ادا کرتا ہے

A.संगोपन
A.nurture
A.نشونما

B.निसर्ग
B.nature
B.فطرت

C.बदल
C.change
C.تبدیلی

D.परिपक्वता
D.maturation
D.بلوغت

Answer: A.संगोपन
A.nurture
A.نشونما

170 सूचना: खालील प्रश्नांमध्ये दिलेल्या पर्यायांमधून संबंधित अक्षर/शब्द/संख्या निवडा.

Cook : Book : :Hoot : ?

DIRECTIONS: In the following question, select the related letter/word/number from the given alternatives.

Cook : Book : :Hoot : ?

سمت: مندرجہ ذیل سوال میں، دیے گئے متبادل سے متعلقہ حرف/لفظ/نمبر منتخب کریں۔

Cook : Book : :Hoot : ?

A.Mood
A.Mood
A.Mood

B.Root
B.Root
B.Root

C.Goot
C.Goot
C.Goot

D.Loot
D.Loot
D.Loot

Answer: C.Goot
C.Goot
C.Goot

171 पॅलेस ऑफ व्हर्सायलेस हा या देशामध्ये आहे –

The Palace of Versailles is in the country of –

ورسیلس کا محل کس ملک میں ہے:

A.इंग्लंड
A.England
A.برطانیہ میں

B.युएसए
B.USA
B.امریکہ میں

C.फ्रान्स
C.France
C.فرانس میں

D.इटली
D.Italy
D.اٹلی میں

Answer: C.फ्रान्स
C.France
C.فرانس میں

172 एका घनाकृतीच्या तीन अवस्था दाखविल्या आहेत. त्यांवर अवलंबून हे शोधून काढा की दिलेल्या घनाकृतीमध्ये 4 या अंकाच्या विरुद्ध बाजूला कोणता अंक असेल?

Three positions of a cube are given. Based on them, find out, which number is found opposite number 4 in a given cube?

ہدایات: ایک کیوب کی تین حالتیں دی گئی ہیں۔ ان کی بنیاد پر، دریافت کیجیئے، کونسا نمبرکیوب میں دیئے گئے 4 نمبر کی اپوسٹ ہے ؟



A. 3

B. 5

C. 1

D. 6

Answer: D. 6

173 एन. बिरेन सिंह हे _____चे मुख्य मंत्री आहेत

N. Biren Singh is the Chief Minister of –

بیرین سنگھ وزیر اعلی ہیں:

A.मणिपूर
A.Manipur
A.منی پور کے

B.मिझोराम
B.Mizoram
B.میزورم کے ۔

C.त्रिपूरा
C.Tripura
C.تریپورہ کے

D.नागालँड
D.Nagaland
D.ناگالینڈ کے ۔

Answer: A.मणिपूर
A.Manipur
A.منی پور کے

174 **सूचना:** खालील प्रश्नात, दिलेल्या पर्यायांमधून नातेसंबंध सांगणारी आकृती निवडा.

DIRECTIONS: In the question below, select the related figure from the given alternatives.

ہدایات: نیچے دیئے گئے سوال میں، دیئے گئے متبادلات میں سے متعلق متبادل چنئے۔

Question Figures

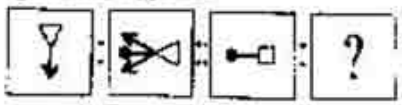

Answer Figures



A. 1

B. 2

C. 3

D. 4

Answer: B. 2

175 सूचना: दिलेल्या पर्यायांमधून वेगळे ते बाहेर काढा.

DIRECTIONS: Find the odd one out from the given alternatives.

سمت: دیے گئے متبادل میں سے بے جوڑ کو تلاش کرو۔

A.NKMJ
A.NKMJ
A.NKMJ

B.FCEB
B.FCEB
B.FCEB

C.URTQ
C.URTQ
C.URTQ

D.TQRP
D.TQRP
D.TQRP

Answer: D.TQRP
D.TQRP
D.TQRP

176 एक संघ मागील वर्षी 8 सामने जिंकला, तर या वर्षी 12 सामने जिंकला.
टक्केवारी वाढ किती आहे?

A team won 12 games this year against 8 games won last year.
What is the percent increase?

ایک ٹیم نے اس سال 12 گیمزجیتے جبکی گزشتہ سال 8 گیمزجیتے تھے. انکی جیت میں کتنا فیصد اضافہ ہوا ہے؟

A.30%

A.30%

A.30%

B.60%

B.60%

B.60%

C.50%

C.50%

C.50%

D.80%

D.80%

D.80%

Answer: C.50%

C.50%

C.50%

177 454.58 – 376.89 + 121.45 – 95.42 =?

454.58 – 376.89 + 121.45 – 95.42 =?

454.58 – 376.89 + 121.45 – 95.42 =?

A.102.22
A.102.22
A.102.22

B.103.72
B.103.72
B.103.72

C.91.72
C.91.72
C.91.72

D.92.32
D.92.32
D.92.32

Answer: B.103.72
B.103.72
B.103.72

178 संकल्पना आणि तत्त्वे शिकविण्याची मूलभूत गरज काय आहे?

What is the basic utility of the teaching of concept and principles?

تصور اور اصولوں کی تعلیم کی بنیادی افادیت کیا ہے؟

A.विद्यार्थ्यांना बाहेरील वातावरणात उपस्थित असलेल्या वस्तूंची माहिती करून देणे
A.To familiarize the students with the objects present in the external environment
A.بیرونی ماحول میں موجود اشیاء کے ساتھ طالب علموں کو واقف کرنے کے لئے

B.विद्यार्थ्यांना यांत्रिक उपक्रमांविषयी शिकविणे
B.To educate the students about the mechanical activities
B.میکانیکی سرگرمیوں کے بارے میں طالب علموں کو تعلیم دینا

C.निर्देश देणे-व्यावहारिक आकार
C.To give the instruction—a practical shape
C.ہدایات دینا — ایک عملی شکل۔

D.वरील सर्व
D.All the above
D.مذکورہ تمام

Answer: D.वरील सर्व
D.All the above
D.مذکورہ تمام

179 निर्देश: खालीदिलेल्या अक्षराच्या क्रमात काही अक्षरे गहाळ केली आहेत ते त्या क्रमाने खाली दिलेल्या पर्यायांपैकी एक आहे

ab _ _abca_ bbca _ bbccaa_bbcc

DIRECTIONS: In each of the following letter series, same of the letters are missing which are given in that order as one of the alternatives below it.

ab _ _abca_ bbca _ bbccaa_bbcc

دایت جیل کے حرف سرج میں کوئی حرف گمشدہ ہے آپکو انکی شناخت جیل کے اختیارات سے کرنی ہے

ab _ _abca_ bbca _ bbccaa_bbcc

A.aaaaa
A.aaaaa
A.aaaaa

B.baaaa
B.baaaa
B.baaaa

C.caaaa
C.caaaa
C.caaaa

D.abbcc
D.abbcc
D.abbcc

Answer: C.caaaa
C.caaaa
C.caaaa

180 मतिमंद मुलास सामान्य मुलासारखी वागणूक दिली जाऊ शकते

A mental retarded child can be treated as a normal child

ذہنی طور پر بیمار بچے کا علاج عام بچے کے طور پر کیا جاسکتا ہے

A.खरे
A.true
A.صحیح

B.खोटे
B.false
B.غلط

C.कधीकधी
C.Sometimes
C.کبھی کبھی

D.वरीलपैकी कोणतेही नाही
D.None of the above
D.درج بالا میں سے کوئی نہیں

Answer: B.खोटे
B.false
B.غلط

181 पुढील म्हण पूर्ण करा - ‘ आपला हात ----------.’

A.मजबूत करा.

B.हाती धरा.

C.आपले गाल.

D.जगन्नाथ.

Answer: D.जगन्नाथ.

182 विशिष्ट रकमेवर 6 वर्षांसाठी सरळ व्याज हे त्या रकमेच्या 9/25 आहे. तर व्याज दर काय आहे:

Simple interest on a certain sum for 6 years is 9/25 of the sum. The rate of interest is:

ایک مخصوص مبلغ پر 6 سال کے لیئے 9/25 کا مبلغ سود مفرد ہے۔ سود کی در ہے:

A.6%
A.6%
A.6%

B.7%
B.7%
B.7%

C.8%
C.8%
C.8%

D.9%
D.9%
D.9%

Answer: A.6%
A.6%
A.6%

183 30 विद्यार्थ्यांच्या वर्गात, S च्या पुढे R सातव्या क्रमांकावर आहे. जर S चे स्थान शेवटून सतरावे असल्यास सुरुवातीपासून R स्थान कितवे ?

R is 7 ranks ahead of S in a class of 30 students. If S's rank is seventeenth from the last, what is R's rank from the start ?

30 بچھوں کی کلاس میں R S اگر .7 درجہ آگے ہے S سے شرو ، ہے درجہ سے ستروہ سے آخر کہ R؟ ہے کیا درجہ کہ

A.(1) 4 वे
A.4th
A.4th

B.(2) 9 वे
B.9th
B.9th

C.(3) 8 वे
C.8th
C.8th

D.(4) 7 वे
D.7th
D.7th

Answer: D.(4) 7 वे
D.7th
D.7th

184 Out of the given options, choose the one which is the correct indirect speech of the sentence given below.
She said to me, “I was waiting for you”.

A.She tells me that she was waiting for me.

B.She tells me that she have been waiting for me.

C.She told me that she have been waiting for me.

D.She told me that she had been waiting for me.

Answer: D.She told me that she had been waiting for me.

185 सूचना : खालील प्रत्येक प्रश्नात दोन विधाने I आणि II दिलेले आहेत. हे विधान एकतर स्वतंत्र कारण असू शकतात किंवा स्वतंत्र कारणांचे परिणाम असू शकतात. यांपैकी एक विधान इतर विधानाचा परिणाम असू शकतो. दोन्ही विधाने वाचा आणि खालीलपैकी कोणत्या उत्तराचा पर्याय या दोन्ही विधानांमधील संबंधांचे वर्णन करतो ते ठरवा.

विधान :
I. सरकार डिझेल वाहनांवर अतिरिक्त कर लावत आहे.
II. सरकार विदुयत वाहनांवर अनुदान देत आहे.

DIRECTIONS: Below in each question are given two statements I and II. These statements may be either independent causes or may be effects of independent causes. One of these statements may be the effect of the other statement. Read both the statements and decide which of the following answer choice correctly depicts the relationship between these two statements.

Statements:
I. Government is imposing additional tax on diesel vehicles.
II. Government is giving subsidy on electric vehicles.

ہدایات: نیچے ہر سوال میں دو بیانات I اور II دیے گئے ہیں۔ یہ بیانات یا تو آزاد وجوہات کے اثرات ہو سکتے ہیں۔ ان بیانات میں سے ایک بیان دوسرے کا اثر ہو سکتا ہے۔دونوں بیانات پڑھیں اور فیصلہ کریں کہ نیچے دیے گئے کس جواب کا انتخاب ان دونوں بیانات کے در میان تعلق کو ٹھیک سے ظاہر کرتا ہے۔

بیانات:
I – حکومت ڈیزل گاڑیوں پر اضافی ٹیکس لگا رہی ہے۔
II - حکومت الیکٹرک گاڑیوں کے لیے سبسڈی فراہم کر رہی ہے۔

A.विधान I कारण आहे आणि विधान II त्याचा परिणाम आहे;
A.Statement I is the cause and statement II is its effect;
A.بیان نمبر I وجہ ہے اور بیان نمبر II اس کا اثر ہے۔

B.विधान II कारण आहे आणि विधान I त्याचा परिणाम आहे;
B.Statement II is the cause and statement I is its effect;
B. بیان نمبر II وجہ ہے اور بیان نمبر I اس کا اثر ہے۔

C.विधान I आणि II दोन्ही स्वतंत्र कारणे आहेत;
C.Both the statements I and II are independent causes;
C. دونوں بیانات نمبر I اور نمبر II آزاد وجوہات ہیں۔

D.विधान I आणि II दोन्ही काही सामान्य कारणांचे परिणाम आहेत;
D.Both the statements I and II are effects of some common cause.
D. دونوں بیانات نمبر I اور نمبر II کسی ایک وجہ کے اثرات ہیں۔

Answer: D.विधान I आणि II दोन्ही काही सामान्य कारणांचे परिणाम आहेत;
D.Both the statements I and II are effects of some common cause.
D. دونوں بیانات نمبر I اور نمبر II کسی ایک وجہ کے اثرات ہیں۔

186

निर्देश: खालील शब्दांचा अर्थपूर्ण क्रम लावा:
1. दही
2. लोणी
3. दूध
4. गाय

DIRECTIONS: Arrange the following in a meaningful order:

1. Curd
2. Butter
3. Milk
4. Cow

ہدایات: ایک معنی خیز ترتیب میں مندرجہ ذیل کو مرتب کریں۔
1. دباؤ
2. مکھن
3. دودھ
4. گائے

A.2, 4, 3, 1
A.2, 4, 3, 1
A.2, 4, 3, 1

B.4, 2, 3, 1
B.4, 2, 3, 1
B.4, 2, 3, 1

C.2, 3, 4, 1
C.2, 3, 4, 1
C.2, 3, 4, 1

D.4, 3, 1, 2
D.4, 3, 1, 2
D.4, 3, 1, 2

Answer:

D.4, 3, 1, 2
D.4, 3, 1, 2
D.4, 3, 1, 2

187 निर्देश: दिलेल्या अंक मालिकेतील चुकीची संज्ञा शोधा:

7, 11, 18, 35, 67, 131, 259

DIRECTIONS: Find the wrong term in the given number series:

7, 11, 18, 35, 67, 131, 259

ہدایت دے گئے نمبرس سرج مے غلط نمبر کھوجے

7, 11, 18, 35, 67, 131, 259

A.18
A.18
A.18

B.35
B.35
B.35

C.11
C.11
C.11

D.131
D.131
D.131

Answer: D.131
D.131
D.131

188 खालीलपैकी कोणते त्रि-मिती आकाराचे उदाहरण नाही?

Which of the following is not an example of 3-dimensional shape

نیچے دئیے گئے جوابات میں سے کونسا 3 جہتی خلاء کی مثال نہیں ہے؟

A. खडूची पेटी

A. Chalk box

A. چالک باکس

B. चेंडू

B. Ball

B. گیند

C. आईसक्रीमचा कोन

C. Ice cream cone

C. آئیس کریم کون

D. समांतर चतुर्भुज (पॅरललोग्राम)

D. Parallelogram

D. متوازی الاضلاع

Answer: D. समांतर चतुर्भुज (पॅरललोग्राम)

D. Parallelogram

D. متوازی الاضلاع

189 A sentence with an underlined idiomatic expression is given. What is the meaning of the idiomatic expression ‘Get away Scot free’ in the sentence given below?
Due to an error in the filing of evidence by police, the suspect finally gets away scot-free.

A.To get away with something without being punished

B.To undergo a severe punishment

C.To be imprisoned

D.None of the above

Answer: A.To get away with something without being punished

190 श्री अनंत गीते हे _____चे केंद्रीय मंत्री आहेत

Shri Anant Geete is the Union Minister for –

شری اننت گیتے یونین منسٹر ہیں

A.नागरी विमानचालन
A.Civil Aviation
A.شہری پرواز کے

B.अवजड उद्योग आणि सार्वजनिक उपक्रम
B.Heavy industries & Public Enterprises
B.بھاری صنعت اور پبلک انٹرپرائز کے

C.आदिवासी प्रकरणे
C.Tribal Affairs
C.قبائلی معاملات کے ۔

D.अन्न प्रक्रियण उद्योग
D.Food processing Industries
D.فوڈ پروسسنگ انڈسٹریز کے ۔

Answer: B.अवजड उद्योग आणि सार्वजनिक उपक्रम
B.Heavy industries & Public Enterprises
B.بھاری صنعت اور پبلک انٹرپرائز کے

191 DIRECTIONS: A sentence with an underlined phrasal verb is given below. Out of the four options, choose the one which can be substituted for the given phrasal Verb.
I asked around but nobody told me his address.

A.asked many people for information

B.kept quiet

C.asked nobody

D.went here and there

Answer: A.asked many people for information

192 फोटोग्राफिक स्लाइड्स कोणत्या प्रकारच्या पडद्यावर तयार होतात?

On which types of films the photographic slides are prepared?

کس قسم کی فلموں پر فوٹو گرافی سلائڈ تیار کرنی چاہیئے؟

A.बाजारात उपलब्ध असलेल्या साध्या फोटोग्राफिक फिल्म्सवर
A.On simple photographic films available in market
A.مارکیٹ میں دستیاب سادہ فوٹو گرافی فلموں پر

B.फोटोग्राफिक फिल्म्स वर जे विशेषतः स्लाईड्स तयार करण्यासाठी असतात
B.On photographic films especially mend for preparation of slides
B.فوٹو گرافی کی سلائڈز کی تیاری کے لئے تیار شدہ خصوصی فلموں پر

C.फोटोग्राफिक कॅमेरेद्वारे
C.Through photographic cameras
C.فوٹو گرافی کیمروں کے ذریعہ

D.वरीलपैकी काहीही नाही
D.None of the above
D.اوپر سے کوئی بھی نہیں

Answer: B.फोटोग्राफिक फिल्म्स वर जे विशेषतः स्लाईड्स तयार करण्यासाठी असतात
B.On photographic films especially mend for preparation of slides
B.فوٹو گرافی کی سلائڈز کی تیاری کے لئے تیار شدہ خصوصی فلموں پر

193 खालीलपैकी कोणते सर्वात मोठे सस्तन प्राणी आहे?

Which amongst the following is the largest mammal?

مندرجہ ذیل میں سے کون سب سے بڑا تھن والا جانور ہے؟

A.हत्ती
A.Elephant
A.ہاتھی

B.व्हेल
B.Whale
B.وہیل مچھلی

C.डायनासोर
C.Dinosaur
C.ڈائناسور

D.गेंडे
D.Rhinoceros
D.گینڈا

Answer: B.व्हेल
B.Whale
B.وہیل مچھلی

194 खालीलपैकी कोणते जंगल "जागतिक वारसा जंगल" म्हणून ओळखले जाते?

Which of the following is considered as the “forest of world heritage”?

مندرجہ ذیل میں سے کون "عالمی ثقافتی ورثہ کے جنگل" کے طور پر تصور کیا جاتا ہے؟

A.ओरिसामधील नंदकानन
A.Nandankanan in Orissa
A. اڑیسہ میں نندنکانن

B.काझीरगण आसाम
B.Kazirangain Assam
B. کازیرنگین آسام

C.पश्चिम बंगालमधील सुंदरबन
C.Sundarban in West Bengal
C. مغربی بنگال میں سندربن

D.पश्चिम बंगालमधील भारतीय वनस्पति उद्यान, शिबुपुर
D.Indian botanic garden, Shibupur in West Bengal
D. بھارتی بوٹینک گارڈن، مغربی بنگال میں شیبو پور

Answer: C.पश्चिम बंगालमधील सुंदरबन
C.Sundarban in West Bengal
C. مغربی بنگال میں سندربن

195 खालीलपैकी कोणते आयगर रिझर्व योग्यपणे त्यांच्या संबंधित स्थानाशी जोडलेले आहेत?

Which of the following Tiger Reserves are correctly paired with their respective locations?

مندرجہ ذیل ٹائیگر ریزرو میں سے کون سا ان کے متعلقہ مقامات کے ساتھ صحیح طریقے سے جڑا ہوا ہے ؟

A.उदान्ती सितानदी - छत्तीसगढ
A.Udanti Sitanadi – Chhattisgarh
A.اودنتی سیتاندی : چھتیسگڑھ

B.दांडेली अनशी - कर्नाटक
B.Dandeli Anashi – Karnataka
B.ڈنڈیلی اناشی : کرناٹک

C.वरीलपैकी दोन्ही
C.Both of the above
C. اوپر کے دونوں

D.वरीलपैकी एकही नाही
D.None of the above
D. مندرجہ بالا میں سے کوئی بھی نہیں

Answer: C.वरीलपैकी दोन्ही
C.Both of the above
C. اوپر کے دونوں

196 $$\frac{(m+n)^2}{m^2-n^2}=?$$

(A) $\frac{(m+n)}{(m-n)}$

(B) $\frac{(m+n)}{(m-n)^2}$

(C) $\frac{(mn)}{(m-n)}$

(D) $\frac{(mn)}{(m+n)}$

Answer: (A) $\frac{(m+n)}{(m-n)}$

197 ∆ DEF मध्ये, सर्व बाजू सारख्या लांबीच्या आहेत, प्रत्येक कोन असेल:

In ∆ DEF, all sides are of equal length, then each angle will be:

∆ DEF میں، تمام اطراف برابر لمبائی ہیں، پھر ہر زاویہ ہو جائے گا

A.90°
A.90°
A.90°

B.75°
B.75°
B.75°

	C.180° C.180° C.180°
	D.60° D.60° D.60°
Answer:	D.60° D.60° D.60°

198	Out of the given options which best expresses the meaning of the given Proverb? People who live in glass houses should not throw stones.
	A.Poor and homeless people try to damage beautiful buildings made of glass
	B.If someone has a beautiful house, he should look down at others
	C.Don't criticize other people if you're not perfect yourself
	D.Sophisticated people do not beat others
Answer:	C.Don't criticize other people if you're not perfect yourself

For More Info And Videos About TAIT-Exam Syllabus And Other Exam Visit My Channel
BADSHAHimp TAIT च्या 30 प्रश्नपत्रिका PDF Available Request 9765226781 YouTube WWW.YouTube.com/BADSHAHimp Subscribe My Channel

199 सूचना: अर्थपूर्ण परिच्छेद निर्माण करण्यासाठी, खाली दिलेली (P), (Q) (R), (S) आणि (T) ही पाच वाक्ये योग्य अनुक्रमाने पुनर्रचना करा; त्यांनतर खालील प्रश्नांची उत्तर द्या.
P. बगळ्याला अपमान वाटला आणि त्याने बदला घायचे ठरविले.
Q. त्याने कोल्ह्याला आपल्यासोबत जेवणासाठी आमंत्रित केले आणि शिजविलेला भात एका सुरईमध्ये दिला. त्यामुळे कोल्हा खाऊ शकला नाही.
R. कोल्हा आणि बगळा दोघे मित्र होते.
S. बगळ्याला लांब चोच होती, त्यामुळे तो सूप पिऊ शकला नाही, पण कोल्ह्याने आपले डिश चाटून पुसुन खाल्ली.
T. एक दिवशी कोल्ह्याने बगळ्याला जेवायला आमंत्रित केले आणि रुंद डिशमध्ये सूप प्यायला दिला.

पुनर्रचना केल्यानंतर खालीलपैकी कोणते वाक्य दुसरे असेल?

DIRECTION: Rearrange the following five sentences (P), (Q), (R), (S) and (T) in the proper sequence to form a meaningful paragraph; then answer the questions given below them.
P. The crane felt insulted and wanted to take revenge.
Q. He invited the fox to dine with him, and served boiled rice in a jug which he could not eat
R. A fox and crane were friends
S. The crane had a long beak, so could not take the soup, but the fox licked the dish.
T. One day, the fox invited the crane to dinner, and put the soup in a flat dish.

Which of the following should be the SECOND sentence after rearrangement?

ہدایات: ان پانچ جملوں (P)، (Q)، (R)، (S) اور (T) کو با معنی پیرا بنانے کے لئے دوبارہ ترتیب دیجئے، پھر نیچے دے گئے سوالوں کے جواب دیجئے

P. سارس کو بےعزتی لگی اور وو بدلا لینا چاہتا تھا.
Q. اسنے لومڑی کو شام کے خانے کی دعوت دی، اور ابلا چاول جگ میں دیا جو وو کھا نہیں سکھتا تھا.
R. ایک لومڑی اور سارس دوست تھے.
S. سارس کی چونچ لمبھی تھی، اسلئے وو شور بہ نہی پی سکھتا تھا، لیکن لومڑی نے سارا کھانا کھا لیا.
T. ایک دن ، لومڑی نے سارس کو شام کے کھانے کی دعوت دی، اور شور بہ ایک ہموار برتن میں رکھا.

دوبارہ ترییب دینے کے بعد کون سا جملہ دوسرا ہونا چاہیے؟

A.T
A.T
A.T

B.P
B.P
B.P

C.Q
C.Q
C.Q

D.S
D.S
D.S

For More Info And Videos About TAIT-Exam Syllabus And Other Exam Visit My Channel
TAIT च्या 30 प्रश्नपत्रिका PDF
BADSHAHimp Available Request 9765226781
WWW.YouTube.com/BADSHAHimp
Subscribe My Channel

Answer: A.T
A.T
A.T

200 पूर्वकालीन थर्मामीटर ह्यांचाद्वारे विकसित करण्यात आला-

Earliest thermometer was developed by

سب سے پہلے تھرما میٹر _____ کے ذریعہ تیار کیا گیا۔

A.सेल्सिअस
A.Celsius
A.سیلسیس

B.फॅरेनहाइट
B.Fahrenheit
B.فارنہائٹ

C.केल्विन
C.Kelvin
C.کیلوین

D.गॅलिलियो
D.Galileo
D.گالیلیو

Answer: D.गॅलिलियो
D.Galileo
D.گالیلیو

For More Info And Videos About TAIT-Exam Syllabus And Other Exam Visit My Channel
TAIT च्या 30 प्रश्नपत्रिका PDF
BADSHAHimp Available Request 9765226781
WWW.YouTube.com/BADSHAHimp
Subscribe My Channel

Question Paper Title : TAIT_PAPER_22

Date of Exam : 2017-12-21 12:30:00.0

1 सूचना: अर्थपूर्ण परिच्छेद निर्माण करण्यासाठी, खाली दिलेली (P), (Q) (R), (S) आणि (T) ही पाच वाक्ये योग्य अनुक्रमाने पुनर्रचना करा; त्यांनतर खालील प्रश्नांची उत्तर द्या.

P. त्यामुळे एकमेकांशी लढून गिधाडांचे खाद्य बनण्यापेक्षा तडजोड करणे आणि मित्र असणे चांगले असे डुक्कर आणि सिंह दोघे ठरवतात.
Q. तो एक गरम उन्हाळाचा दिवस होता. पाणी पिण्यासाठी एका छोट्या तळ्याजवळ सिंह आणि डुक्कर येतात.
R. ते एकत्र पाणी पितात आणि त्यानंतर आपआपल्या मार्गाला निघून जातात.
S. लवकरच त्यांना कळते कि, गिधाडे त्यांच्यापैकी एक किंवा दोघेही खाली पडण्याची वाट पाहत आहेत, ती त्यांच्यासाठी मेजवानी होती.
T. कोण आधी पाणी पिणार यावरून वाद घालून आणि लढून झाल्यानंतर दम खाण्यासाठी ते थोडावेळ थांबले, तेव्हा त्यांच्या लक्षात आले कि त्यांच्यावर गिधाडे आहेत.

पुनर्रचना केल्यानंतर खालीलपैकी कोणते वाक्य चौथे असेल?

DIRECTION: Rearrange the following five sentences (P), (Q), (R), (S) and (T) in the proper sequence to form a meaningful paragraph; then answer the questions given below them.
P. The lion and the boar then decide that it was best to make up and be friends than fight and become food for vultures.
Q. It was a hot summer day. A lion and a boar reach a small water body for a drink.
R. They drink the water together and go their ways after.
S. Soon they realize that the vultures are waiting for one or both of them to fall, to feast on them.
T. After arguing and fighting about who should drink first, they get tired and stop for breath, when they notice vultures above.

Which of the following should be the FOURTH sentence after rearrangement?

ہدایات: ان پانچ جملوں (P)، (Q)، (R)، (S) اور (T) کو با معنی پیرا بنانے کے لئے دوبارہ ترتیب دیجئے، پھر نیچے دے گئے سوالوں کے جواب دیجئے

P. شیر اور سور نے فیصلہ کیا کہ لاڈیی کرنے اور گدد کہ خانہ بننے سے اچھا ہے کہ ہم صلح کرے اور اچھے دوست بنے.
Q. ایک گرمی کا دن تھا. سور اور شیر پانی پینے پہنچے.
R. انہونے ساتھ میں پانی پیا اور اپنے اپنے راستے پی نکل گئے.
S. جلدی انھ احساس ہوا کہ گدد انمی سے ایک یا دونوں کہ انتظار کر رہا ہے تاکی وو انکا شکار کر سکھ.
T. بہر کرنے اور لاڈیی کرنے کے بعد جب وو تھک گئے اور سان لینے کے لئے بیٹھ گئے، جب انہونے دیکھا کہ گدد انکے اپر بیٹھا تھا.

دوبارہ ترییب دینے کے بعد کون سا جملہ چوتھا ہونا چاہیے؟

A.P
A.P
A.P

For More Info And Videos About TAIT-Exam Syllabus And Other Exam Visit My Channel
TAIT च्या 30 प्रश्नपत्रिका PDF
BADSHAHimp Available Request 9765226781
WWW.YouTube.com/BADSHAHimp
Subscribe My Channel

B.Q
B.Q
B.Q

C.R
C.R
C.R

D.S
D.S
D.S

Answer: A.P
A.P
A.P

2 Out of the four alternatives, choose the one which can be substituted for the given words/sentence.
A procession of people who are walking or riding in cars to a funeral

A.Cortege

B.Epitaph

C.Mortuary

D.Obituary

Answer: A.Cortege

3 निर्देश: खालील मालिकेतील गहाळ संख्या शोधा.

3, 6, 9, 12, 15, ..., 21

DIRECTION: Find the missing number in the following series.

3, 6, 9, 12, 15, ..., 21

ہدایات: جیل کے سرچ مے گمشدہ نمبر کھوجے .

3, 6, 9, 12, 15, ..., 21

A.15
A.15

For More Info And Videos About TAIT-Exam Syllabus And Other Exam Visit My Channel
TAIT च्या 30 प्रश्नपत्रिका PDF
BADSHAHimp Available Request 9765226781
WWW.YouTube.com/BADSHAHimp
Subscribe My Channel

	B.18 B.18	
	C.11 C.11	
	D.13 D.13	
Answer:	B.18 B.18	
4		1/8×(223+?)=71 1/8×(223+?)=71 1/8×(223+?)=71
		A.342 A.342 A.342
		B.346 B.346 B.346
		C.345 C.345 C.345
		D.348 D.348 D.348
Answer:		C.345 C.345 C.345
5	जर x:y=2:3 आणि y:z=9:6 असेल, तर x:y:z शोधा. If x:y=2:3 and y:z=9:6. Find x:y:z? اگر x:y=2:3 اور y:z=9:6 تو x:y:z معلوم کریں؟	

For More Info And Videos About TAIT-Exam Syllabus And Other Exam Visit My Channel
TAIT च्या 30 प्रश्नपत्रिका PDF
BADSHAHimp Available Request 9765226781
WWW.YouTube.com/BADSHAHimp
Subscribe My Channel

	A.2:9:6 A.2:9:6 A.2:9:6
	B.3:9:6 B.3:9:6 B.3:9:6
	C.2:4:6 C.2:4:6 C.2:4:6
	D.2:3:2 D.2:3:2 D.2:3:2
Answer:	D.2:3:2 D.2:3:2 D.2:3:2

For More Info And Videos About TAIT-Exam Syllabus And Other Exam Visit My Channel
TAIT च्या 30 प्रश्नपत्रिका PDF
BADSHAHimp Available Request 9765226781
WWW.YouTube.com/BADSHAHimp
Subscribe My Channel

6 सूचना: दिलेली माहिती काळजीपूर्वक वाचा आणि खालील प्रश्नांची उत्तरे द्या.
सहा मित्र P, Q, R, S, T आणि U वेगवेगळ्या कंपन्यांत काम करतात, जसे - गुगल, ऑरेकल, प्रोमेट्रिक, ऍपल, फेसबुक आणि टाटा आणि प्रत्येकजण कंपनी प्रायोजित वेगवेगळ्या रंगाचे शर्ट घालतात, उदा. पांढरा, काळा, शेंदरी, पिवळा, हिरवा आणि करडा पण हे त्याच क्रमाने असतील असे नाही.
I. ज्याने पांढरा शर्ट घातला आहे तो ऍपलमध्ये काम करतो आणि ज्याने काळा शर्ट घातला आहे तो गुगल मध्ये काम करतो.
II. U हा प्रोमेट्रिक किंवा फेसबुकमध्ये काम करत नाही.
III. P हा शेंदरी रंगाचा शर्ट वापरतो आणि ऑरेकल मध्ये काम करतो.
IV. S फेसबुकमध्ये काम करीत नाही आणि प्रोमेट्रिक हिरव्या रंगाच्या शर्टाला प्रायोजित केलेले नाही.
V. T टाटामध्ये काम करतो आणि S किंवा N दोघेही ऍपल मध्ये काम करत नाही.
VI. फेसबुक हिरव्या किंवा पिवळ्या रंगाचे शर्ट प्रायोजित करत नाहीत आणि R गुगल मध्ये काम करतो.
कोणती जोडी अचूकपणे जुळते?

DIRECTIONS: Read the following information carefully and answer the questions that follow.
Six friends P,Q,R,S,T and U works in different companies namely— Google, Oracle, Prometric, Apple, Facebook and Tata and each wears different coloured company- sponsored shirts, viz., White, Black, Orange, Yellow, Green and Grey though not necessarily in the same order.
I. The one wearing the white shirt works in Apple and the one wearing the black shirt works in Google.
II. U does not work in Prometric or Facebook.
III. P wears orange shirt and works in Oracle.
IV. S does not work in Facebook and green coloured shirt is not sponsored by Prometric.
V. T works in Tata, and neither S nor Q works in Apple.
VI. Facebook does not sponsor green or yellow coloured shirts and R works in Goole.
Which pair is correctly matched?

ہدایات: مندرجہ ذیل معلومات کو دھیان سے پڑھیں اور نیچے دیے گئے سوالوں کے جواب دیں۔
مختلف کمپنیوں میں کام کرتے ہیں جن کے نام ہیں – گوگل، اوریکل، پرومیٹرک، ایپل، فیسبک، اور ٹاٹا U اور T، S، R، Q، P چھ دوست اور ہر ایک مختلف رنگ کی کمپنی کی اسپانسر کی ہوئی شرٹ پہنتا ہے جیسے سفید، کالی، نارنگی، پیلی، ہری اور بھوری اگرچہ لازمی طور پر یکساں ترتیب میں نہیں۔
I۔ سفید شرٹ پہننے والا ایپل میں کام کرتا ہے اور کالی شرٹ پہننے والا گوگل میں کام کرتا ہے۔
II- U پرومیٹرک یا فیسبک میں کام نہیں کرتا ہے۔
III- P نارنگی شرٹ پہنتا ہے اور اوریکل میں کام کرتا ہے۔
IV- S فیسبک میں کام نہیں کرتا ہے اور ہرے رنگ کی شرٹ پرومیٹرک کے ذریعہ اسپانسر کی ہوئی نہیں ہے۔
V- T ایپل میں کام کرتا ہے۔ Q نہ ہی S ٹاٹا میں کام کرتا ہے، اور نہ تو
VI گوگل میں کام کرتا ہے۔ R ۔ فیسبک ہرے یا پیلی رنگ کی شرٹ اسپانسر نہیں کرتا ہے اور
کون سا جوڑا درست مماثلت ہے؟

A.करडा-प्रोमॅट्रिक –P
A.Grey—Prometric—P
A.بھورا—پرومیٹرک — P

B.करडा -फेसबुक-Q
B.Grey—Facebook —Q
B.بھورا—فیسبک — Q

C.काळा-प्रोमॅट्रिक –R
C.Black—Prometric—R
C.کالا—پرومیٹرک — R

D.हे सर्व
D.All of these
D.ان میں سے سبھی

Answer: B.करडा -फेसबुक-Q
B.Grey—Facebook —Q
B.بھورا—فیسبک — Q

7 **सूचना:** खालील प्रश्नात, दिलेल्या पर्यायांमधून नातेसंबंध सांगणारी आकृती निवडा.

DIRECTIONS: In the question below, select the related figure from the given alternatives.

ہدایات: ذیل کے سوال میں، دئے گئے متبادلات میں سے متعلقہ تصویر منتخب کریں۔

प्रश्न आकृत्या
Problem Figures
مسئلہ کی تصاویر

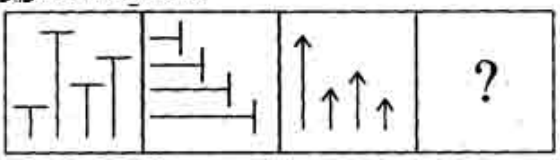

उत्तरासाठी पर्यायी आकृत्या
Answer Figure
جواب کی تصویر

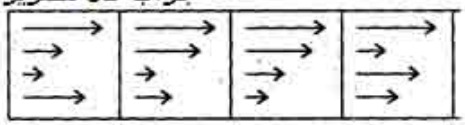

A. (A)

B. (B)

C. (C)

D. (D)

Answer: C. (C)

For More Info And Videos About TAIT-Exam Syllabus And Other Exam Visit My Channel
BADSHAHimp TAIT च्या 30 प्रश्नपत्रिका PDF Available Request 9765226781 WWW.YouTube.com/BADSHAHimp Subscribe My Channel

8 सूचना: अर्थपूर्ण परिच्छेद निर्माण करण्यासाठी, खाली दिलेली (P), (Q) (R), (S) आणि (T) ही पाच वाक्ये योग्य अनुक्रमाने पुनर्रचना करा; त्यांनतर खालील प्रश्नांची उत्तर द्या.

P. त्यामुळे एकमेकांशी लढून गिधाडांचे खाद्य बनण्यापेक्षा तडजोड करणे आणि मित्र असणे चांगले असे डुक्कर आणि सिंह दोघे ठरवतात.
Q. तो एक गरम उन्हाळाचा दिवस होता. पाणी पिण्यासाठी एका छोट्या तळ्याजवळ सिंह आणि डुक्कर येतात.
R. ते एकत्र पाणी पितात आणि त्यानंतर आपआपल्या मार्गाला निघून जातात.
S. लवकरच त्यांना कळते कि, गिधाडे त्यांच्यापैकी एक किंवा दोघेही खाली पडण्याची वाट पाहत आहेत, ती त्यांच्यासाठी मेजवानी होती.
T. कोण आधी पाणी पिणार यावरून वाद घालून आणि लढून झाल्यानंतर दम खाण्यासाठी ते थोडावेळ थांबले, तेव्हा त्यांच्या लक्षात आले कि त्यांच्यावर गिधाडे आहेत.

पुनर्रचना केल्यानंतर खालीलपैकी कोणते वाक्य तिसरे असेल?

DIRECTION: Rearrange the following five sentences (P), (Q), (R), (S) and (T) in the proper sequence to form a meaningful paragraph; then answer the questions given below them.
P. The lion and the boar then decide that it was best to make up and be friends than fight and become food for vultures.
Q. It was a hot summer day. A lion and a boar reach a small water body for a drink.
R. They drink the water together and go their ways after.
S. Soon they realize that the vultures are waiting for one or both of them to fall, to feast on them.
T. After arguing and fighting about who should drink first, they get tired and stop for breath, when they notice vultures above.

Which of the following should be the THIRD sentence after rearrangement?

ہدایات: ان پانچ جملوں (P)، (Q)، (R)، (S) اور (T) کو با معنی پیرا بنانے کے لئے دوبارہ ترتیب دیجئے، پھر نیچے دے گئے سوالوں کے جواب دیجئے

P. شیر اور سور نے فیصلہ کیا کہ لاڈیی کرنے اور گدد کہ خانہ بننے سے اچھا ہے کہ ہم صلح کرے اور اچھے دوست بنے.
Q. ایک گرمی کا دن تھا. سور اور شیر پانی پینے پہنچے.
R. انہونے ساتھ میں پانی پیا اور اپنے اپنے راستے پی نکل گئے.
S. جلدی انھ احساس ہوا کہ گدد انمی سے ایک یا دونوں کہ انتظار کر رہا ہے تاکی وو انکا شکار کر سکھ.
T. بہر کرنے اور لاڈیی کرنے کے بعد جب وو تھک گئے اور سان لینے کے لئے بیٹھ گئے، جب انہونے دیکھا کہ گدد انکے اپر بیٹھا تھا.

دوبارہ ترییب دینے کے بعد کون سا جملہ تیسرا ہونا چاہیے؟

A.S
A.S
A.S

B.P
B.P
B.P

C.Q
C.Q
C.Q

For More Info And Videos About TAIT-Exam Syllabus And Other Exam Visit My Channel
TAIT च्या 30 प्रश्नपत्रिका PDF
BADSHAHimp Available Request 9765226781
YouTube WWW.YouTube.com/BADSHAHimp
Subscribe My Channel

D.T
D.T
D.T

Answer: A.S
A.S
A.S

9 खालीलपैकी शुद्ध वाक्य कोणते ?

A.एक लहान मुलाने पंतप्रधानांना गुलाबाचे फूल दिले.

B.एका लहान मुलाने पंतप्रधानांना गुलाबाचे फूल दिले.

C.एका लहान मुलाला पंतप्रधानांना गुलाबाचे फूल दिले.

D.एका लहान मुलांनी पंतप्रधानांना गुलाबाचे फूल दिले.

Answer: B.एका लहान मुलाने पंतप्रधानांना गुलाबाचे फूल दिले.

10 पुढील म्हण पूर्ण करा - ‘ बैल गेला नि ------- केला.’ ‘

A.पोळा

B.गोऱ्हा

C.पट

D.झोपा

Answer: D.झोपा

For More Info And Videos About TAIT-Exam Syllabus And Other Exam Visit My Channel
TAIT च्या 30 प्रश्नपत्रिका PDF
BADSHAHimp Available Request 9765226781
WWW.YouTube.com/BADSHAHimp
Subscribe My Channel

11 निर्देश: खालील प्रश्नांमध्ये प्रश्न चिन्हाच्या (?) जागी कोणते अंदाजे मूल्य यायला हवे?
(2940÷34−12)×5 =?

DIRECTIONS: What approximate value should come in the place of question mark (?) in the following equations.

(2940÷34−12)×5 =?

ہدایات: مندرجہ ذیل سوال میں سوال کا نشان (?) کی جگہ پر کون سا تخمینہ ویلیو آئے گا -
(2940÷34−12)×5 =?

A.400
A.400
A.400

B.450
B.450
B.450

C.375
C.375
C.375

D.464
D.464
D.464

Answer: C.375
C.375
C.375

For More Info And Videos About TAIT-Exam Syllabus And Other Exam Visit My Channel
TAIT च्या 30 प्रश्नपत्रिका PDF
BADSHAHimp Available Request 9765226781
WWW.YouTube.com/BADSHAHimp
Subscribe My Channel

12 विधान:
एका कॉलेज प्राध्यापकाने दावा केला आहे की काही विद्यार्थ्यांनी प्रश्नपत्रिका चोरली आहे.

कृतीचा कोर्स:
I. प्राध्यापकांनी प्रश्नपत्रिका बदलली पाहिजे.
II. प्राध्यापकांनी संबंधित विद्यार्थ्यांविरुद्ध कठोर कारवाई केली पाहिजे.

Statement:
A college professor claims that some students have stolen the question paper.

Course of actions:
I. The professor should change the question paper.
II. The professor should take strict actions against the concerned students

بیان:
ایک کالج پروفیسر نے دعویٰ کیا ہے کہ کچھ طلباء نے امتحانی پرچہ چوری کر لیا ہے۔

لائحہ عمل:
I۔پروفیسر کو امتحانی پرچہ تبدیل کر دینا چاہیے
II۔ پروفیسر کو متعلقہ طلباء کے خلاف سخت کاروائی کرنی چاہیے ۔

A.फक्त I अनुसरून आहे
A.Only I follows
A. صرف I لاگو ہو گا۔

B.फक्त II अनुसरण करते आहे
B.Only II follows
B. صرف II لاگو ہو گا۔

C.एकतर I किंवा II अनुसरून आहे
C.Either I or II follows
C. I یا II میں سے ایک لاگو ہو گا۔

D.I किंवा II दोन्हीपैकी काहीही अनुसरण करत नाही
D.Neither I nor II follows
D. I اور II میں سے کوئی بھی لاگو نہیں ہو گا۔

Answer: A.फक्त I अनुसरून आहे
A.Only I follows
A. صرف I لاگو ہو گا۔

13 समाजाची सेवा करणारा -

A.देवमाणूस

B.समाजशास्त्री

	C.समाजसेवक
	D.समाजसेविका
Answer:	C.समाजसेवक

14	$(1296)^{1/4}$ = ? $(1296)^{1/4}$ = ? $(1296)^{1/4}$ = ?
	A.4 A.4 A.4
	B.8 B.8 B.8
	C.2 C.2 C.2
	D.6 D.6 D.6
Answer:	D.6 D.6 D.6

15	DIRECTIONS: A sentence with an underlined phrasal verb is given below. Out of the four options, choose the one which can be substituted for the given phrasal Verb. One should look ahead for success.
	A.anticipate
	B.disregard
	C.neglect
	D.overlook
Answer:	A.anticipate

16 पेनिसिलीन यातून काढले आहे:-

Penicillin is extracted from:-

پینیسیلن _____ سے نکالا جاتا ہے۔

A.शैवाल
A.Algae
A.الگائے

B.बुरशी
B.Fungus
B.فنگس

C.इस्ट
C.Yeast
C.خمیر

D.दगडफूल
D.Lichen
D.لیچین

Answer: B.बुरशी
B.Fungus
B.فنگس

17 पिसलेल्या कार्ड्सच्या पॅकमधून एक कार्ड काढण्यात आले, तर काढलेले कार्ड मानाचे असल्याची संभाव्यता काढा.

If a card is drawn from a pack of cards, then find the probability that the card drawn is a spade or an honour.

اگر کارڈ کارڈ کے کارڈ سے تیار ہوجائے تو، اس امکان کو تلاش کریں کہ کارڈ کا اہتمام ایک سپا یا اعزاز ہے.

A.25/52
A.25/52
A.25/52

B.24/52
B.24/52
B.24/52

C.11/16
C.11/16
C.11/16

D.23/52
D.23/52
D.23/52

Answer: A.25/52
A.25/52
A.25/52

18 सूचना: खालील प्रश्नांमध्ये दिलेल्या पर्यायांमधून संबंधित अक्षर/शब्द/संख्या निवडा.

दूध: लीटर ::

DIRECTIONS: In the following question, select the related letter/word/number from the given alternatives.

Milk: Liter ::

سمت: مندرجہ ذیل سوال میں، دیے گئے متبادل سے متعلقہ حرف/لفظ/نمبر منتخب کریں۔

:: دودھ : لیٹر

A.अंतर:सेकंद
A.Distance:Second
A.فاصلہ:سیکنڈ

B.वेळ:मीटर
B.Time:Meter
B.وقت:میٹر

C.तांदूळ:किलोग्राम
C.Rice:Kilogram
C.چاول:کلوگرام

D.वजन:लीटर
D.Weight: Liter
D.وزن:لیٹر

Answer: C.तांदूळ:किलोग्राम
C.Rice:Kilogram
C.چاول:کلوگرام

19 मनोजने 15 मिनिटे उशीरा सुरूवात केली आणि तो त्याच्या सामान्य गतीच्या 3/2 प्रवास करून त्याच्या कार्यालयात 5 मिनिटे आधी पोहचला, त्याच्या प्रवासाचा सामान्य कालावधी काढा.

Manoj started 15 minutes late and by travelling at a speed which is 3/2th of his usual speed reached his office 5 Minutes early, what is the usual time of his journey?

منوج نے 15 منٹ دیر سے آغاز کیا اور عمومی رفتارکے3/2حصے کے بقدر سفر کرتے ہوئے 5 منٹ پہلے اپنے دفتر پہنچا، اس کے سفر کا عمومی وقت کیا ہے؟

A.60 मिनिट
A.60 minute
A.60 منٹ

B.30 मिनिट
B.30 minute
B.30 منٹ

C.40 मिनिट
C.40 minute
C.40 منٹ

D.75 मिनिट
D.75 minute
D.75 منٹ

Answer: A.60 मिनिट
A.60 minute
A.60 منٹ

20 Out of the given four words only one is not spelt correctly. Find the word that is not correctly spelt.

A.Milenium

B.Migration

C.Mischievous

D.Momentum

Answer: A.Milenium

21 सूचना: खाली दिलेल्या विधान (A) आणि कारण (R) साठी, खालील पैकी योग्य पर्याय निवडा:

विधान (A): डेन्मार्कला मध्यरात्र सूर्यप्रकाश म्हणून ओळखले जाते.
कारण (R): डेन्मार्कमध्ये सूर्योदय प्रथम होतो.
दो

DIRECTION: For the Assertion (A) and Reason (R) given below, choose the correct alternative from the following:

Assertion (A): Denmark is known as land of midnight sun.
Reason (R): The sunrise happens first in Denmark.

ہدایت: نیچے دئیے گئے اسرشن (A) اور (R) وجہ کے لئے، مندرجہ ذیل میں سے صحیح متبادل منتخب کریں:

اسرشن(A): ڈنمارک کو آدھی رات کے سورج کی زمین کے طور پر جانا جاتا ہے۔
وجہ (R): سورج سب سے پہلے ڈنمارک میں طلوع ہوتا ہے۔

A.दोन्ही (A) आणि (R) सत्य आहेत आणि (R) (A) च योग्य स्पष्टीकरण आहे
A.Both (A) and (R) are true and (R) is the correct explanation of (A)
A. (A) اور (R) دونوں صحیح ہیں اور (R) (A) کی درست وضاحت ہے

B.दोन्ही (A) आणि (R) खरे आहेत, परंतु (R) (A) च योग्य स्पष्टीकरण नाही
B.Both (A) and (R) are true, but (R) is not the correct explanation of (A)
B. (A) اور (R) دونوں صحیح ہیں، لیکن (R) (A) کی درست وضاحت نہیں ہے

C.(A) सत्य आहे, परंतु (R) खोटे आहे
C.(A) is true, but (R) is false
C. (A) صحیح ہے، لیکن (R) غلط ہے

D.(A) खोटे आहे, परंतु (R) सत्य आहे
D.(A) is false, but (R) is true
D. (A) غلط ہے، لیکن (R) صحیح ہے

Answer: D.(A) खोटे आहे, परंतु (R) सत्य आहे
D.(A) is false, but (R) is true
D. (A) غلط ہے، لیکن (R) صحیح ہے

22 . जेव्हा आपला बॉस अति द्वेषाने आपल्या शक्तीचा गैर वापर करतो अश्या परिस्थितीत आपण वाद होण्यापासून कसे टाळणार?

When your boss exercises his powers with an altitude of malice how would you avoid confrontation under this condition?

جب آپ کا باس اپنی طاقت کو اونچائی کے ساتھ استعمال کرتا ہے تو ایسی حالت میں آپ اس کا سامنا کرنے سے کیسے گریز کریں گے؟

A.आपण क्रोधीत होणार पण त्या व्यक्तीचे वरिष्ठत्व लक्षात घेऊन आपला राग शांत करणार
A.You become furious but crumble down your emotions due to the superiority of the person
A.آپ غصہ ہو جائیں گے لیکن شخص کی بڑائی کی وجہ سے آپ اپنے جذبات کو دبا دیں گے

B.आपण बदला घेण्यासाठी त्याला ठार मारण्याचा विचार करणार
B.You think to kill him to take revenge
B.آپ اسے بدلہ لینے کے لئے مارنے کے بارے میں سوچتے ہیں

C.आपण कल्पना करणार कि देव त्याला त्याच्या वाईट कृत्याची शिक्षा देणार
C.You imagine that god must give him punishment for his untrue act
C.آپ تصور کرتے ہیں کہ خدا اس کو اس کے غلط عمل کے لئے سزا ضرور دیگا

D.आपण शपथ घेऊ कि आपण दुष्टपणाला आत्मसमर्पण करणार नाही.
D.You keep promise not to surrender against the wickedness.
D.تم وعدہ کرتے رہو کہ بدکاری کے خلاف سر نہیں جھکاو گے.

Answer: D.आपण शपथ घेऊ कि आपण दुष्टपणाला आत्मसमर्पण करणार नाही.
D.You keep promise not to surrender against the wickedness.
D.تم وعدہ کرتے رہو کہ بدکاری کے خلاف سر نہیں جھکاو گے.

23 तापट' या शब्दाचा विरुद्धार्थी शब्द कोणता ?

A.सोशिक

B.तामसी

C.रागीट

D.संतापी

Answer: A.सोशिक

24 DIRECTIONS: A sentence with an underlined phrasal verb is given below. Out of the four options, choose the one which can be substituted for the given phrasal Verb.
The sides of the box <u>came apart</u> while opening it.

A.got united

B.got separated

C.got repaired

D.disappeared

Answer: B.got separated

25 _____ हे एक मज्जासंस्थेसंबंधीचे जन्मजात संलक्षण आहे

_____ is a neurological birth syndrome

_____ایک اعصابی پیدائشی سنڈروم ہے

A.डाऊन सिंड्रोम
A.Down syndrome
A.ڈاون سنڈروم

B.फ्रेजाईल एक्स सिंड्रोम
B.Fragile X syndrome
B.فریجائل ایکس سنڈروم

C.सेरेब्रल पाल्सी
C.Cerebral palsy
C.دماغی بخار

D.सीव्हीए (सेरेब्रोव्हस्क्युलर अपघात)
D.CVA (Cerebrovascular accident)
D.سی وی اے (دماغی عروقی حادثہ)

Answer:
C.सेरेब्रल पाल्सी
C.Cerebral palsy
C.دماغی بخار

26 जेव्हा आपण इतरांसोबत व्यवहार करत असतो, आपण अशी अपेक्षा करतो-

When you deal with others, you expect that—

—جب آپ دوسروں سے معاملات کرتے ہیں تو آپ توقع رکھتے ہیں کہ

A.आपल्याकडून कौतुक करून घेण्यासाठी ते आपल्या स्वभावानुसार व्यवहार करणार
A.They deal according to your nature in order to get your appreciation
A.آپ کی تعریف حاصل کرنے کے لئے وہ آپ کی فطرت کے مطابق کام کریں

B.आपण फक्त पूर्वीचे व्यवहार लक्षात ठेवणार नाहीतर हे दुखाचे नातेसंबंध बनून जातील
B.You restore only superficial dealings otherwise it becomes a sad affair of relations
B.آپ صرف غیر معمولی معاملات کو بحال کرتے ہیں ورنہ یہ رشتے کا غمناک پہلو بن جاتا ہے

C.आपण स्वत:हाच्या स्वभावाचे संदर्भ लक्षात घेवून इतरांचा अंदाज लावणार
C.You estimate others with reference to your own behavior
C.آپ دوسروں کے رویہ کا اندازہ اپنے رویہ پر قیاس کر کے کرتے ہیں

D.आपण सखोल विचार करून भलतच अर्थ काढू नये
D.You do not develop deep intimacy
D.آپ گہرے تعلق استوار نہیں کرتے

Answer: C.आपण स्वत:हाच्या स्वभावाचे संदर्भ लक्षात घेवून इतरांचा अंदाज लावणार
C.You estimate others with reference to your own behavior
C.آپ دوسروں کے رویہ کا اندازہ اپنے رویہ پر قیاس کر کے کرتے ہیں

27 दिलेली अदलाबदल : चिन्हे ÷ आणि x, तसेच आकडे 2 आणि 8 ; तर 16 x 8 ÷ 2 चे मूल्य किती ?

Given interchanges: signs ÷ and ×, and numbers 2 and 8; then the value of 16 × 8 ÷ 2 is

دیئے گئے تبادلے: علامات ÷ اور ×، اور نمبر 2 اور 8؛ تو 16× 8 ÷ 2کی تعداد ہے

A.72
A.72
A.72

B.48
B.48
B.48

C.64
C.64
C.64

D.16
D.16
D.16

Answer: C.64
C.64
C.64

28 सूचना : खालील प्रत्येक प्रश्नात दोन विधाने I आणि II दिलेले आहेत. हे विधान एकतर स्वतंत्र कारण असू शकतात किंवा स्वतंत्र कारणांचे परिणाम असू शकतात. यांपैकी एक विधान इतर विधानाचा परिणाम असू शकतो. दोन्ही विधाने वाचा आणि खालीलपैकी कोणत्या उत्तराचा पर्याय या दोन्ही विधानांमधील संबंधांचे वर्णन करतो ते ठरवा.

विधान :
I. परिसरात स्त्रीभ्रूणहत्येचा दर खूप जास्त आहे.
II. स्थानिक रहिवासी महिलांपेक्षा पुरुष चांगले असल्याचे मानतात.

DIRECTIONS: Below in each question are given two statements I and II. These statements may be either independent causes or may be effects of independent causes. One of these statements may be the effect of the other statement. Read both the statements and decide which of the following answer choice correctly depicts the relationship between these two statements.

Statements:
I. The rate of female foeticide is exceptionally high in the locality.
II. The individuals of the locality consider males to be better than females.

ہدایات: نیچے ہر سوال میں دو بیانات I اور II آ تو یہ بیانات یا پھر آزاد وجوہات کے اثرات ہو سکتے ہیں۔ ان‌دیے گئے ہیں۔ بیانات میں سے ایک بیان دوسرے کا اثر ہو سکتا ہے۔دونوں بیانات پڑھیں اور فیصلہ کریں کہ نیچے دیے گئے کس جواب کا انتخاب ان دونوں بیانات کے در میان تعلق کو ٹھیک سے ظاہر کرتا ہے۔

بیانات:
I – علاقے میں لڑکیوں کی جنین کشی کی شرح غیر معمولی حد تک زیادہ ہے۔
II ۔ علاقے کے افراد مردوں کو عورتوں سے بہتری سمجھتے ہیں۔

A.विधान I कारण आहे आणि विधान II त्याचा परिणाम आहे;
A.Statement I is the cause and statement II is its effect;
A.بیان نمبر I وجہ ہے اور بیان نمبر II اس کا اثر ہے۔

B.विधान II कारण आहे आणि विधान I त्याचा परिणाम आहे;
B.Statement II is the cause and statement I is its effect;
B.بیان نمبر II وجہ ہے اور بیان نمبر I اس کا اثر ہے۔

C.विधान I आणि II दोन्ही स्वतंत्र कारणे आहेत;
C.Both the statements I and II are independent causes;
C. دونوں بیانات نمبر I اور نمبر II آزاد وجوہات ہیں۔

D.विधान I आणि II दोन्ही स्वतंत्र कारणांचे परिणाम आहेत;
D.Both the statements I and II are effects of independent causes;
D.دونوں بیانات نمبر I اور نمبر II آزاد وجوہات کے اثرات ہیں۔

Answer: B.विधान II कारण आहे आणि विधान I त्याचा परिणाम आहे;
B.Statement II is the cause and statement I is its effect;
B.بیان نمبر II وجہ ہے اور بیان نمبر I اس کا اثر ہے۔

29 बिंदू A हा बिंदू B च्या उत्तरेस 5 मी. वर आहे. बिंदू B हा बिंदू C च्या पश्चिमेस 8 मी. वर आहे. बिंदू D हा बिंदू C च्या दक्षिणेस 4 मी. वर आहे. बिंदू E हा बिंदू A च्या पूर्वेस 4 मी. वर आहे. बिंदू F हा बिंदू B व बिंदू C च्या मधे अशा तऱ्हेने आहे की बिंदू B, C व F यांची सरळ रेष तयार होते. बिंदू A पासून बिंदू D कोणत्या दिशेस आहे?

Point A is 5m to the north of point B. Point B is 8m to the west of point C. Point D is 4m to the south of point C. Point E is 4m to the east of point A. Point F is exactly midway between point B and C in such a way that point B, C and F form a straight line. In which direction is point D with respect to point A?

پوائنٹ A پوائنٹB کے جنوب میں C پوائنٹ D سے 8 میٹر مغرب میں ہے - پوائنٹC پوائنٹ B سے 5 میٹر کے فاصلے پر ہے- پوائنٹ کے بالکل درمیان C اور B پوائنٹ ،F کے مشرق میں 4 میٹر کے فاصلے پر ہے- پوائنٹA پوائنٹ E 4 میٹر کے فاصلے پر ہے- پوائنٹ کس سمت میں ہے؟ A کے بالمقابل پوائنٹD سیدھی لکیر میں آ رہے ہیں- تو پوائنٹ F اور C اور B میں اس طرح سے ہے کہ پوائنٹس

A.दक्षिण पश्चिम
A.South West
A.جنوب مغرب

B.दक्षिण पूर्व
B.South East
B.جنوب مشرق

C.उत्तर पश्चिम
C.North West
C.شمال مغرب

D.दक्षिण
D.South
D.جنوب

Answer: B.दक्षिण पूर्व
B.South East
B.جنوب مشرق

30 दिलेल्या मालिकेचा मध्य काढा:
6, 5, 2, 6, 7, 10

Find the mean of the given series:
6, 5, 2, 6, 7, 10

دی ہوئی سیریز کا اوسط (میڈین) ہوگا
6, 5, 2, 6, 7, 10

A.7
A.7
A.7

B.6
B.6
B.6

C.8
C.8
C.8

D.9
D.9
D.9

Answer: B.6
B.6
B.6

31 गहाळ संख्या शोधा.
Find the missing number.
گمشدہ نمبر کھوجیے ۔

3	5	8	13	22	?

A. 35

B. 39

C. 30

D. 43

Answer: B. 39

32 सूचना: दिलेल्या पर्यायांमधून वेगळे ते निवडा.

DIRECTIONS: Choose the odd one out from the given alternatives.

سمت: دیے گئے متبادل میں سے بے جوڑ کو چنیں۔

A.ONMKJ
A.ONMKJ
A.ONMKJ

B.UTSQP
B.UTSQP
B.UTSQP

C.IHGED
C.IHGED
C.IHGED

D.ZYXTS
D.ZYXTS
D.ZYXTS

Answer: D.ZYXTS
D.ZYXTS
D.ZYXTS

33 भारताच्या संविधानाच्या संपूर्ण इतिहासातील सर्वात वादग्रस्त सुधारणा ही आहे:

The most controversial amendment in the entire history of India constitution is:

بھارت کے آئین کی پوری تاریخ میں سب سے زیادہ متنازعہ ترمیم ہے:

A.41वी
A.41st
A.41واں

B.42वी
B.42nd
B.42واں

C.43वी
C.43rd
C.43واں

D.44वी
D.44th
D.44واں

Answer: B.42वी
B.42nd
B.42واں

34 कोणत्या शहराला ‘गुलाबी शहर’ म्हणून जाणले जाते?

Which city is known as the ‘Pink City’?

کون سا شہر گلابی شہر کے نام سے جانا جاتا ہے :

A.जोधपूर
A.Jodhpur
A.جودھپور

B.जयपूर
B.Jaipur
B.جیپور

C.जमशेदपूर
C.Jamshedpur
C.جمشید پور

D.उदयपूर
D.Udaipur
D.ادئیپور

Answer:

B.जयपूर
B.Jaipur
B.جیپور

35

प्रश्नासाठी सूचना: खालील मालिका पूर्ण करा.

QT, OR, MP, ____ IL

DIRECTION: Complete the following series.

QT, OR, MP, ____ IL

سوال کے لیے ہدایت:مندرجہ ذیل سیریز کو مکمل کریں۔

QT, OR, MP, ____ IL

A.BY
A.BY
A.BY

B.KN
B.KN
B.KN

C.YN
C.YN
C.YN

D.HQ
D.HQ
D.HQ

Answer:

B.KN
B.KN
B.KN

36 दोन संख्यांचा लसावी 225 आहे आणि त्यांचा मसावी 5 आहे. जर एक संख्या 25 असेल, तर दुसरी संख्या काय असेल?

LCM of two numbers is 225 and their HCF is 5. If one number is 25, the other number will be?

دو نمبروں کے ایل سی ایم 225 ہے اور ان کے ایچ سی ایف 5. 5۔ اگر ایک نمبر 25 ہے، تو دوسری نمبر ہو گی؟

A.5
A.5
A.5

B.25
B.25
B.25

C.45
C.45
C.45

D.225
D.225
D.225

Answer: C.45
C.45
C.45

37 खालीलपैकी कोणता रोग विषाणूमुळे होतो?

Which of the following disease is caused by virus?

مندرجہ ذیل میں سے کونسی بیماری وائرس کی وج سے ہوتی ہے؟

A.डिप्थीरिया
A.Diphtheria
A.ڈفتھیریا

B.प्लेग
B.Plague
B.طاعون

C.क्षयरोग
C.Tuberculosis
C.سل

D.कांजण्या
D.Chicken Pox
D.چیچک

Answer: D.कांजण्या
D.Chicken Pox
D.چیچک

38 **सूचना:** दिलेल्या चारांपैकी वेगळी (असंबद्ध) असणारी आकृती शोधून काढा.

DIRECTIONS: Find the odd from the given four figures.

ہدایات: دی گئی 4 تصاویر میں سے متفرق تلاش کریں۔

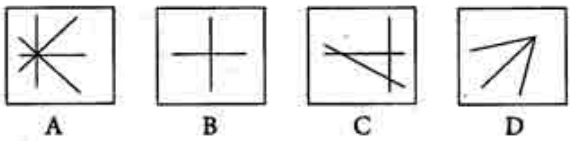

A. (A)

B. (B)

C. (C)

D. (D)

Answer: C. (C)

39 4 वर्षांचा शामू आता आपल्या मित्राच्या भावना अधिक चांगल्या तऱ्हेने समजू शकतो. शामू प्राप्त करीत असलेली वाढती क्षमता आहे_____

4 Year old Shamu is now better able to empathize with his friends feelings. This growing ability that Shamu is acquiring is _____

4 سالہ شامو اس قابل ہے کہ وہ اپنے دوست احباب کے احساسات کو سمجھ سکتا ہے۔ یہ بڑھنے والی اہلیت جسے شامو اخذ کر رہا ہے وہ ہے_____

A.स्व-संकल्पना
A.self-concept
A.خود کا نظریہ

B.मनाचा सिद्धांत
B.theory of mind
B.ذہن کا نظریہ

C.बंध
C.schema
C.خاکہ

D.प्रवृत्ती
D.temperament
D.خصلت

Answer: B.मनाचा सिद्धांत
B.theory of mind
B.ذہن کا نظریہ

40 सूचनाः यापैकी कोणती आकृती प्रश्नामध्ये वापरलेल्या तीन शब्दांच्या दरम्यानचे नाते उत्तमरित्या दर्शवते?
खेळाडू, विद्यार्थी आणि मुली

DIRECTIONS: Which of the following figures represents the best relationship among the three terms used in the question?
Players, Students and Girls

ہدایات: مندرجہ ذیل میں سے کون سی ڈایاگرام درج ذیل سوالات میں استعمال ہونے والے تین شرائط کے درمیان بہترین تعلقات کی نمائندگی کرتی ہے.
کھلاڑی، طلباء اور لڑکیاں

(A) 

(B) 

(C) 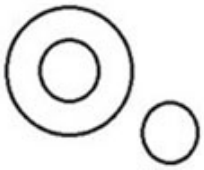

(D) 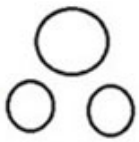

Answer: (B) 

41 भारताचे पर्यावरण, वन आणि हवामान बदल मंत्री कोण आहेत?

Who is the minister of Environment, Forest & Climate Change of India?

وزیر ماحولیات جنگلات اور موسم میں بدلائو ہیں :

A.जुआल ओरम
A.Jual Oram
A.جئول اورم

B.डॉ. हर्ष वर्धन
B.Dr. Harsh Vardhan
B.ڈاکٹر ہرش وردھن

C.धर्मेंद्र प्रधान
C.Dharmendra Pradhan
C.دھرمیندر پردھان

D.राजनाथ सिंह
D.Rajnath Singh
D.راجناتھ سنگھ

Answer: B.डॉ. हर्ष वर्धन
B.Dr. Harsh Vardhan
B.ڈاکٹر ہرش وردھن

42 पाच मुलांमध्ये, M हा K आणि T पेक्षा जास्त वजनदार आहे. B हा T आणि P पेक्षा वजनाने हलका आहे. K हा सर्वात हलका नाही. तर त्यांच्यात सर्वात हलका कोण ?

Among five students M is heavier than K and T. B is lighter than T and P. K is not the lightest. Who among them is the lightest?

پانچ بچھوں میں سے M K اور T سے بھاری ہے. B T اور P سے ہلکا ہے. K ؟ سب سے ہلکا نہیں ہے. ان میں سے کون سبسے ہلکا ہے

A.K
A.K
A.K

B.B
B.B
B.B

C.T
C.T
C.T

D.अपुरी माहिती
D.Data inadequate
D.ڈیٹا ناکافی

Answer: B.B
B.B
B.B

43

सूचना: खालील प्रश्नात एकाच फाशाच्या चार अवस्था दाखविल्या आहेत. प्रश्नात विचारलेल्या चिन्हाच्या विरुद्ध बाजूला कोणते चिन्ह असेल?

DIRECTIONS: In the following questions four positions of the same dice are shown. Select the symbol opposite to the symbol as asked in the question.

ہدایات: مندرجہ ذیل سوالات میں ایک ہی ڈبوں کے چار مختلف پوزیشن دکھائے گئے ہیں- جیسا کہ سوال میں پوچھا گیا ہے، نشان کے برعکس نشان منتخب کریں-

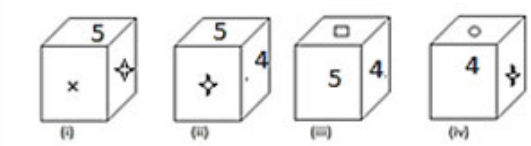

□ या चिन्हाच्या विरुद्ध बाजूला कोणते चिन्ह असेल?
Which symbol will be opposite to symbol □ ?
؟ □ نشان کے بر عکس کون نشان ہوگا

(A) o

(B) ✧

(C) ×

(D) 5

Answer: (B) ✧

44 चौकोन तयार करण्यासाठी 28 सेंमी त्रिज्या असलेली तार वाकवली गेली, चौकोन आणि वर्तुळाच्या क्षेत्रफळांचे गुणोत्तर काढा.

A circular wire of radius 28 cm is bent to form a square, find out the ratio of areas of the square to that of the circle.

ایک نصف قطر کے تار کا دائرہ 28 سینٹی میٹر، ایک مربع بنانے کے لیئے موڑا ہوا ہے۔ اس دائرہ کے مربع کے رقبہ کے تناسب کو معلوم کریں۔

A.21:28
A.21:28
A.21:28

B.14:15
B.14:15
B.14:15

C.20:21
C.20:21
C.20:21

D.11:14
D.11:14
D.11:14

Answer: D.11:14
D.11:14
D.11:14

45 DIRECTIONS: A sentence with an underlined word is given below. Find the word which is opposite in meaning to the underlined word from the given options.
Birds are <u>abundant</u> in the tall vegetation.

A.Scanty

B.Plentiful

C.Copious

D.Ample

Answer: A.Scanty

46 ‘शूल’ या शब्दाचा विरुद्धार्थी शब्द कोणता ?

A.बाण

B.अस्त्र

C.तिडीक

D.वेदनाशमन

Answer: D.वेदनाशमन

47 Choose the word which is opposite in meaning to the given word.
FLOOD

A.Drought

B.Outpouring

C.Abundance

D.Overflow

Answer: A.Drought

48 फोटोतील एका स्त्रीकडे बोट दाखवून एक मुलगी म्हणते, “ती या मुलाची आई आहे, ज्याचे वडील माझा भाऊ आहे”. मग त्या मुलीचे त्या स्त्रीसोबत नाते काय?

Pointing to a lady in a photograph a girl said, "She is the mother of the boy, whose father is my brother". How is the girl related to that lady ?

تصویر میں عورت کی طرف اشارہ کرکے لڑکی نے کہا، "یے لڑکے کی ماں ہے ،جسکا باپ میرا بھائی ہے" . لڑکی کا اس عورت سے کیا رشتہ تھا؟

A.बहीण
A.Sister
A.بہن

B.पुतणी
B.Niece
B.بھتیجی

C.चुलत बहीण
C.Cousin
C.چچا زاد

D.मेव्हणी
D.Sister-in-law
D.بھابی

Answer: D.मेव्हणी
D.Sister-in-law
D.بھابی

49 सूचना: खाली दिलेल्या प्रश्नात एक विधान आहे ज्याचे I आणि II असे दोन निष्कर्ष त्याखाली अंकित केलेले आहेत. या आधारे सर्वात योग्य पर्याय निवडा.

विधान:
शहराच्या पाणी पुरवठ्याच्या मुख्य पाईपलाईनमध्ये दुरुस्तीचे काम चालू आहे. ह्यामुळे शहरात पुरवला जाणारा पाणीपुरवठा ७५ टक्क्यांनी कमी केला आहे.

निष्कर्ष:
I. मुख्य पाईपलाईनमध्ये दोष आहे.
II. मुख्य पाईप लाईन वर नियमित करण्यात येणारे दुरुस्तीचे काम चालू आहे.

DIRECTIONS: The question below has a statement followed by two conclusions numbered I and II. Based on this choose the option that is most suitable.

Statement:
The repair works are being carried on the main water line of the city. Because of this water supply to the city will be reduced by 75 percent.

Conclusions:
I. There is a fault in the main line.
II. The routine repair work is being carried on theline.

ہدایات: نیچے دیے گئے سوال میں ایک بیان کے بعد دو نتائج I اور II دیے گئے ہیں۔ اس کی بنیاد پرانتہائی موزوں آپشن کا انتخاب کیجیے۔

بیان:
شہر کی مرکزی پانی کی لائن پر مرمت کے کام کئےجا رہے ہیں. اس وجہ سے شہر کو پانی کی سپلائی 75 فیصد کم ہو جائے گی.

نتیجے:
I. مرکزی لائن میں ایک خرابی ہے.
II. لائن پر معمول کی مرمت کا کام کیا جا رہا ہے.

A.केवळ निष्कर्ष क्रमांक I विधानास अनुसरून आहे
A.Only Conclusion I follows
A.صرف نتیجہ I لاگو ہو گا۔

B.केवळ निष्कर्ष क्रमांक II विधानास अनुसरून आहे
B.Only Conclusions II follows
B. صرف نتیجہ II لاگو ہو گا۔

C.निष्कर्ष क्रमांक I किंवा II अनुसरून आहे
C.Either I or II follows
C. I یا II میں سے ایک لاگو ہو گا۔

D.कोणताही निष्कर्ष अनुसरून नाही
D.Both I and II follow
D. I اور II دونوں لاگو ہوں گے۔

Answer: D.कोणताही निष्कर्ष अनुसरून नाही
D.Both I and II follow
D. I اور II دونوں لاگو ہوں گے۔

50 सूचना: प्रत्येक प्रश्नाला एक प्रमुख विधानासोबत चार विधाने आहेत ज्यांच्याखाली A, B, C आणि D असे चार विधान आहेत. क्रमवार विधानांची जोडी निवडा ज्यामध्ये प्रथम विधान दुसऱ्या विधानाला सुचवते, आणि दोन्ही विधाने तर्किकदृष्ट्या प्रमुख विधानासोबत निगडित असेल.

हा फोन एकतर पांढरा आहे किंवा काळा आहे.
A. हा फोन पांढरा आहे.
B. हा फोन पांढरा नाही.
C. हा फोन काळा आहे.
D. हा फोन काळा नाही.

DIRECTIONS: Each question has a main statement followed by four statements labelled A, B, C and D. Choose the ordered pair of statements, where the first statement implies the second, and the two statements are logically consistent with the main statement.

This phone is either white or black
A. This phone is white
B. This phone is not white
C. This phone is black
D. This phone is not black

ہدایت: ہر سوال میں ایک جملہ ہے جسکے بعد چار جملےاے، بی،سی اور ڈی کے نام سے دئے گئے ہیں اسمیں منسلک جوڑیوں کو چنئے۔ جہاں پہلا جملہ دوسرے جملہ کی اور اشارہ کر رہا ہے اور دو جملے منطقی مرکزی بیان کے مطابق ہیں

یہ فون یا کالا ہے یا سفید
A۔ فون سفید ہے
B۔ فون سفید نہیں ہے
C۔ فون کالا ہے
D۔ فون کالا نہیں ہے

A.BD
A.BD
A.BD

B.DA
B.DA
B.DA

C.CA
C.CA
C.CA

D.AB
D.AB
D.AB

Answer: B.DA
B.DA
B.DA

51 खालीलपैकी अशुद्ध शब्द कोणता ?

A.तगमग

B.तजविज

C.तजेलदार

D.तटतटीत

Answer: B.तजविज

52

सूचना: खालील प्रश्नात उत्तरातील पर्यायांपैकी कोणत्या पर्यायी आकृतीत प्रश्नातील आकृती अंतर्भूत आहे?

DIRECTIONS: In the given question find the answer figure in which question figure is embedded.

ہدایات: دیئے گئے سوال میں سے اس جواب والی تصویر کو تلاش کریں جس میں سوال کی تصویر منسلک ہے۔

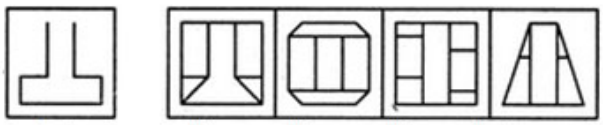

A. (A)

B. (B)

C. (C)

D. (D)

Answer: A. (A)

53 पुढील जोडशब्द पूर्ण करा . ‘ हमरी ----------’

A.तुमरी

B.सखी

C.दुकान

D.गल्ली

Answer: A.तुमरी

54 सामाजिक दृष्टिकोणातून आणि स्वत: च्या कल्पनांवर पूर्णपणे केंद्रित व्यक्ती म्हणजे-

A person with drawing socially & becoming totally focused on own ideas and fantasies

ایک شخص سماجی طور پر ڈرائنگ کرنے والا ہے اور اپنے خیالات اور فن و ثقافتوں پر مکمل توجہ مرکوز کرتا ہے

A.सामाजिक माघार घेणारा
A.Social withdrawal
A.سماجی واپسی

B.अव्होहशन
B.Avohtion
B.مواصلات

C.उदासिन असलेला
C.Depression
C.ڈپریشن

D.सरळसरळ प्रभाव असलेला
D.Flat effect
D.فلیٹ اثر

Answer: A.सामाजिक माघार घेणारा
A.Social withdrawal
A.سماجی واپسی

55 खालील शब्दांची चढत्या क्रमाने मांडणी करून खाली दिलेल्या प्रतिसादांमधून कोणता अर्थपूर्ण क्रम असेल?

1. कधीच नाही
2. कधी कधी
3. सामान्यतः
4. अचानक
5. नेहमीच

Which one of the given responses would be a meaningful order of the following words in ascending order?

1. Never
2. Sometimes
3. Generally
4. Suddenly
5. Always

چڑھتی ہوئی ترتیب میں دیےگیے جوابات میں سے کونسا ایک مندرجہ ذیل الفاظ کی معنی خیز ترتیب ہوگی؟

1. کبھی نہیں
2. کبھی کبھی
3. عام طور پر
4. اچانک
5. ہمیشہ

A.5, 2, 1, 3, 4
A.5, 2, 1, 3, 4
A.5, 2, 1, 3, 4

B.5, 2, 4, 3, 1
B.5, 2, 4, 3, 1
B.5, 2, 4, 3, 1

C.5, 3, 2, 1, 4
C.5, 3, 2, 1, 4
C.5, 3, 2, 1, 4

D.5, 3, 2, 4, 1
D.5, 3, 2, 4, 1
D.5, 3, 2, 4, 1

Answer: D.5, 3, 2, 4, 1
D.5, 3, 2, 4, 1
D.5, 3, 2, 4, 1

56 मुलांच्या रांगेत 21 A हा डावीकडून पंधराव्या क्रमांकावर तर B उजवीकडून चौथ्या स्थानावर आहे. तर A आणि B यांच्यामध्ये किती मुले आहेत ?

In a row of 21 boys, A is fifteenth from the left and B is fourth from the right. How Many boys are there between A and B?

21، لڑکوں کی کتار میں A اور B کے درمیان ہے۔ کتنے بچھے B بھائیں سے پندراوہ ہے اور A دھائیں سے چوتھا ہے۔

A.2
A.2
A.2

B.3
B.3
B.3

C.5
C.5
C.5

D.4
D.4
D.4

Answer: A.2
A.2
A.2

57 कोणत्या वर्षी 2008 ची दिनदर्शिका पुन्हा वापरली जाईल?

In which year the calendar of 2008 will be used again?

کس سال 2008 کیلنڈر پھر سے استعمال ہوگا؟

A.2017
A.2017
A.2017

B.2018
B.2018
B.2018

C.2020
C.2020
C.2020

D.2036
D.2036
D.2036

Answer:
D.2036
D.2036
D.2036

58 जर पृथ्वीवर तुमचे वजन 72 किलोग्राम असेल तर, चंद्रावर तुमचे वजन किती असेल?

If your weight on earth is 72 kg, what would be your weight on moon?

اگر زمین پر آپ کا وزن 72 کیلوگرام ہے تو چاند پر آپ کا وزن کتنا ہوگا؟

A.72 किलोग्राम
A.72 kg
A.72 کیلو گرام

B.12 किलोग्राम
B.12 kg
B.12 کیلوگرام

C.124 किलोग्राम
C.124kg
C.124 کیلوگرام

D.24 किलोग्राम
D.24 kg
D.24 کیلوگرام

Answer:
B.12 किलोग्राम
B.12 kg
B.12 کیلوگرام

59 जसे आपण विषुवृत्तापासून ध्रुवाकडे जाल जी चे मुल्य:

As we go from the equator to the poles, the value of g:

جب ہم خط استوا (اکویٹر) سے کرہ ارض کے ایک سرے (پول) پر جاتے ہیں تو g کا ویلو:

A.तेच राहाते
A.Remains the same
A.پنی جگہ برقرار رہتا ہے

B.वाढते
B.Increases
B.بڑھ جاتا ہے

C.घटते
C.Decreases
C.کم ہو جاتا ہے

D.वरीलपैकी एकही नाही
D.None of these
D.ان میں سے کوئی نہیں

Answer: B.वाढते
B.Increases
B.بڑھ جاتا ہے

60 एका विशिष्ट सांकेतिक भाषेमध्ये, जर PLATINUM हा शब्द AIUPLTNM असा कूटबध्द केला जात असेल, ADVENTURE हा शब्द त्या भाषेत कसा कूटबध्द केला जाईल?

In a certain code language, if the word PLATINUM is coded as AIUPLTNM, then how is the word ADVENTURE coded in that language?

ایک مخصوص ضابطے کی زبان میں، اگر لفظ PLATINUM کو AIUPLTNM لفظ اس زبان میں تو ADVENTURE لکھا جاتا ہے، کو کیسے لکھاجائیگا؟

A.AEEUDNRTV
A.AEEUDNRTV
A.AEEUDNRTV

B.ADEENRTUV
B.ADEENRTUV
B.ADEENRTUV

C.AEUEDNTVR
C.AEUEDNTVR
C.AEUEDNTVR

D.AEUEDVNTR
D.AEUEDVNTR
D.AEUEDVNTR

Answer: D.AEUEDVNTR
D.AEUEDVNTR
D.AEUEDVNTR

61 कंटेनरमधील पेट्रोल आणि केरोसीनचे गुणोत्तर 3 : 2 आहे जेव्हा 10 लिटर्स मिश्रण बाहेर काढले जाते तेव्हा त्याच्या जागी केरोसीन टाकले जाते, हे गुणोत्तर 2 : 3 बनते. कंटेनरमधील मिश्रणाचे एकूण प्रमाण किती आहे?

The ratio of petrol and kerosene in the container is 3 : 2 when 10 liters of the mixture is taken out and is repalced by the kerosene, the ratio become 2 : 3. The total quantity of the mixture in the container is

کنٹینر میں پٹرول اور کیروسین کا تناسب 3 : 2 ہے جب 10 لیٹر کا مرکب باہر نکالا جاتا ہے اور اس کی جگہ کیروسین ڈالا جاتا ہے، تو تناسب 2 : 3ہوجاتا ہے۔ کنٹینر میں مرکب کی مجموعی مقدارکیا ہے

A.25
A.25
A.25

B.30
B.30
B.30

C.45
C.45
C.45

D.निश्चित केले जाऊ शकत नाही
D.Can’t be determined
D.معلوم نہیں ہو سکتا

Answer: B.30
B.30
B.30

62 समजा काही शिक्षक आपला रिकामा वेळ फाजील विनोदी गोष्टीत व्यर्थ घालतात, आपण सुध्दा त्या समुहाचे सदस्य आहात

Suppose a few teachers are busy in cracking filthy jokes during their leisure time in school, you are also member of that group

فرض کریں کہ کچھ اساتذہ اسکول میں اپنے آرام دہ اور پرسکون وقت کے دوران گندے مذاق کو پھیلانے میں مصروف ہیں، آپ بھی اس گروپ کے رکن ہیں

A.आपण त्यांना आपला रिकामा वेळ फाजील विनोदी गोष्टीमध्ये वाया घालवू नका हे समजवण्याचे प्रयत्न करणार
A.You persuade them not to waste their leisure time in filthy jokes
A.آپ ان کو قائل کرتے ہیں کہ فرصت کا وقت گندا مذاق میں ضائع نہ کریں

B.आपण गट बदलणार किंवा एकटे राहणार कारण आपल्याला ते पटत नाही
B.You change the group or live in isolation because you don’t relish it
B.آپ گروپ کو تبدیل کرتے ہیں یا تنہائی میں رہتے ہیں کیونکہ آپ اسے برباد نہیں کرتے ہیں

C.शाळेत विनोद करताना आपल्या भाषेचे भान ठेवण्यास सांगणार
C.You instruct them to mind their language while cracking jokes in school
C.آپ ان کو ہدایت دیتے ہیں کہ وہ اسکول میں مذاق کرتے وقت اپنی زبان کو قابو میں رکھیں

D.) आपण टीका करू व त्यांना त्यांच्या महान कृत्याची आठवण करून देवू.
D.You criticize and remind them of their noble profession.
D.آپ ان پرتنقید کرتے ہیں اور انہیں ان کےعظیم پیشہ کی یاد دلاتے ہیں.

Answer: A.आपण त्यांना आपला रिकामा वेळ फाजील विनोदी गोष्टीमध्ये वाया घालवू नका हे समजवण्याचे प्रयत्न करणार
A.You persuade them not to waste their leisure time in filthy jokes
A.آپ ان کو قائل کرتے ہیں کہ فرصت کا وقت گندا مذاق میں ضائع نہ کریں

63 जेव्हा आपला आपल्या मित्रासोबत प्रचंड वाद होत असेल, तेव्हा अश्या प्रसंगात सर्वात योग्य पर्याय असू शकतो-

When you develop intense conflicts with your friend, the most suitable option in this case may be—

جب آپ اپنے دوست جے کے ساتھ شدید تنازعات کو فروغ دیتے ہیں، تو اس معاملے میں سب سے زیادہ مناسب صورت یہ ہوسکتی ہے کہ —

A.त्याला पूर्णपणे दुर्लक्षित करा
A.Neglect him absolutely
A.اسے بالکل نظر انداز کرنا

B.त्या प्रसंगातून स्वत: बाहेर निघा
B.Withdraw yourself from the scene
B.اپنے آپ کو منظر سے ہٹانا

C.आक्रमक व्हा व बदला घ्या
C.Become aggressive and revengeful
C.جارحانہ اور بدلہ لینے والا بن جانا

D.शांत व्हा आणि समस्येवर पुनर्विचार करा.
D.Calm down and re-think on the issue.
D.پرسکون رہنا اور مسئلہ پر دوبارہ سوچنا۔

Answer: B.त्या प्रसंगातून स्वत: बाहेर निघा
B.Withdraw yourself from the scene
B.اپنے آپ کو منظر سے ہٹانا

64 समजा तुमच्या सहकाऱ्याने तुमचे टपाल ईर्ष्येमुळे चोरले किंवा फाडून टाकले. ह्या परिस्थितीला तुम्ही कशी मात द्याल?

Suppose your colleague either commits theft or torn out your postage from school due to jealousy. How would you overcome this problem?

فرض کریں کہ آپ کے ساتھی نے چوری کا ارتکاب کیا یا حسد کی وجہ سے آپ کی ڈاک کو اسکول سے باہر پھینک دیا.آپ اس مسئلے پر کیسے قابو پائیں گے؟

A.आपण गुन्हेगाराला पुराव्या सकट पकडणार आणि त्याला शिक्षा देणार
A.You catch the culprit red-handed and abuse him
A.آپ رنگے ہاتھوں مجرم پکڑتے ہیں اور اسے بدسلوکی کرتے ہیں

B.फक्त त्याला धडा शिकवण्यासाठी आपण त्याचे पत्रे फाडण्याचा प्रयत्न करणार
B.You try to take a revenge by tearing his letters just to teach him a lesson
B.آپ اس کے خطوط پھاڑ کر اس سے انتقام لینے کی کوشش کریں گے محض اسے سبق سکھانے کے لئے

C.एकदा आपण त्याला पकडू व कठोर शब्दात चेतावणी देऊ
C.Once you catch him and warn him severely
C.جب آپ اسے پکڑتے ہیں اور اسے سختی سے خبردار دیتے ہیں

D.आपण सर्वांसमोर त्याची बदनामी करू
D.You insult him in public.
D.آپ عوام میں اس کی تذلیل کریں گے.

Answer: C.एकदा आपण त्याला पकडू व कठोर शब्दात चेतावणी देऊ
C.Once you catch him and warn him severely
C.جب آپ اسے پکڑتے ہیں اور اسے سختی سے خبردار دیتے ہیں

65 जर आपण आपले दुपारचा डब्बा शाळेत आणला असता, मधल्या सुट्टीच्या वेळेत आपली जेवण्याची पद्धत कशी राहणार?

If you take your mid-day meal to school, what will be your mode of taking meal during recess hour?

اگر آپ اسکول میں اپنا مڈ ڈے کا کھانا ساتھ لے جاتے ہیں، تو آپ کا وقفے کے دوران کھانا کھانے کا کیا طریقہ ہوگا؟

A.आपण आपले जेवण इतरांमध्ये देखील वाटणार कारण इतरांचे जेवण हे रुचकर आहे
A.You share your meal with others because other’s food is tastier
A.آپ دوسروں کے ساتھ کھانا کھاتے ہیں کیونکہ دوسرے کا کھانا ذائقہ دار ہے

B.आपण आपल्या मित्रांसोबत कॅन्टीनमध्ये जेवणार
B.You take food with your friend in canteen
B.آپ اپنے دوست کے ساتھ کھانا کینٹن میں لے جاو گے

C.आपण कौटुंबिक रूढीप्रमाणे व वैयक्तिक भावनेमुळे जेवण एकटे घेणार
C.You take food in isolation due to family customs and personal inhibitions
C.خاندان کے رواج اور ذاتی عادات کی وجہ سے آپ تنہائی میں کھانا کھاتے ہیں

D.आपण आपल्या सहकार्यांसोबत आपले जेवण वाटणार व आपल्या समुहासोबत याचा आनंद घेणार
D.You share your food with all the staff- members and enjoy it in your group
D.آپ اپنے کھانے کا تمام عملے کے ساتھ اشتراک کریں اور اپنے گروپ میں لطف اندوز ہوں

Answer: D.आपण आपल्या सहकार्यांसोबत आपले जेवण वाटणार व आपल्या समुहासोबत याचा आनंद घेणार
D.You share your food with all the staff- members and enjoy it in your group
D.آپ اپنے کھانے کا تمام عملے کے ساتھ اشتراک کریں اور اپنے گروپ میں لطف اندوز ہوں

66 सूचना: प्रत्येक प्रश्नाला एक प्रमुख विधानासोबत चार विधाने आहेत ज्यांच्याखाली A, B, C आणि D असे चार विधान आहेत. क्रमवार विधानांची जोडी निवडा ज्यामध्ये प्रथम विधान दुसऱ्या विधानाला सुचवते, आणि दोन्ही विधाने तर्किकदृष्ट्या प्रमुख विधानासोबत निगडित असेल.

ती योग किंवा एरोबिक्स यापैकी एक करते.
A. तिने योग केले.
B. तिने योग केले नाही.
C. तिने एरोबिक्स केले.
D. तिने एरोबिक्स केले नाही.

DIRECTIONS: Each question has a main statement followed by four statements labelled A, B, C and D. Choose the ordered pair of statements, where the first statement implies the second, and the two statements are logically consistent with the main statement.

She does either yoga or aerobics
A. She did yoga
B. She did not do yoga
C. She did aerobics
D. She did not do aerobics

ہدایت: ہر سوال میں ایک جملہ ہے جسکے بعد چار جملےاے، بی،سی اور ڈی کے نام سے دئے گئے ہیں اسمیں منسلک جوڑیوں کو چنئے۔ جہاں پہلا جملہ دوسرے جملہ کی اور اشارہ کر رہا ہے اور دو جملے منطقی مرکزی بیان کے مطابق ہیں

وہ یا یوگا کرتی ہے یا ایروبکس
Aاس نے یوگا کیا ۔
Bاس نے یوگا نہیں کیا ۔
Cاس نے ایروبکس کی ۔
Dاس نے ایروبکس نہیں کی ۔

A.BD
A.BD
A.BD

B.DA
B.DA
B.DA

C.CA
C.CA
C.CA

D.AB
D.AB
D.AB

Answer: B.DA
B.DA
B.DA

67 बदलण्याचे सर्वात कठीण दृष्टीकोन आहेत-

The most difficult attitudes to change are

تبدیل کرنے میں سب سے مشکل رویے ہوتے ہیں:

A.नकारात्मक आणि सकारात्मक दृष्टिकोन
A.Negative & positive attitudes
A. منفی اور مثبت رویے

B.टोकाचा आणि मध्यवर्ती दृष्टिकोन
B.Extreme & central attitudes
B.شدید اور مرکزی رویے

C.कमी तीव्र आणि परिधीय
C.Less extreme & peripheral
C.کم شدید اور محیط

D.साधे आणि एकाधिक
D.Simple & multiple
D.عام اور کثیر العناصر

Answer: B.टोकाचा आणि मध्यवर्ती दृष्टिकोन
B.Extreme & central attitudes
B.شدید اور مرکزی رویے

68 महेश भट्ट हे नाव _____ या क्षेत्रामध्ये सर्वज्ञात आहे

Mahesh Bhatt is a well - known name in the field of -

: مہیش بھٹ ایک جانا مانا نام ہے

A.राजकारण
A.Politics
A.سیاست میں

B.चित्रपट-निर्मिती
B.Movie – making
B.فلم بنانے میں

C.संगीत
C.Music
C.موسیقی میں

D.सामाजिक सक्रियता
D.Social Activism
D.رفاعہ عامہ کے کام میں

Answer: B.चित्रपट-निर्मिती
B.Movie – making
B.فلم بنانے میں

69 सूचना: या प्रत्येक प्रश्नांमध्ये तुम्हाला A आणि B अशी दोन विधाने दिलेली आहे आणि (I) आणि (II) असे दोन निष्कर्ष दिलेले आहेत. सामान्यपणे माहीत असलेल्या तथ्यांशी जुळत नसले तरी खालील दोन विधाने बरोबर आहेत असे समजा. खालीलपैकी कोणते निष्कर्ष दिलेल्या वाक्यांना संपूर्णपणे लागू आहे ते ठरवा.
निवेदन:
A: सर्व कागद पेन आहेत.
B: काही पेन्सिली पेन आहेत.
निष्कर्ष:
I: सर्व पेन पेन्सिल आहेत.
II: सर्व पेन कागदे आहेत.

DIRECTION: In each of these questions, you are given two statements A and B followed by two conclusions (I) and (II). You have to take the two statements to be true even if they seem to be at variance from commonly known facts. You are to decide which of the given conclusions definitely follows from the given statements.

Statements:
A: Some papers are pens.
B: Some pencils are pens.

Conclusions:
I: Some pens are pencils.
II: Some pens are papers.

ہدایت:ان سوالوں میں سے ہر ایک میں، آپ کو دو بیانات A اور B کے بعد دو نتائج (I) اور (II) دیے گئے ہیں جن کے بعد دو نتائج دیے گئے ہیں۔ آپ کو دو بیانات دونوں بیانات کو درست تسلیم کرنا ہے اگرچہ وہ عام طور پر معلوم حقائق کے برعکس نظر آتے ہوں۔ آپ کو فیصلہ کرنا ہے کہ دیے گئے نتائج میں سے کون یقینی طور پر دیے گئے بیانات کی پیروی کرتا ہے۔

بیانات:
A: کچھ کاغذ قلم ہیں۔
B: کچھ پنسل قلم ہیں۔

حل:
I: کچھ قلم پنسل ہیں۔
II. کچھ قلم کاغذ ہیں۔

A.जर केवळ निष्कर्ष I निघत असल्यास.
A.If only conclusion I follows
A.صرف نتیجہ I پیروی کرتا ہے۔

B.जर केवळ निष्कर्ष II निघत असल्यास
B.If only conclusion II follows
B.صرف نتیجہ II پیروی کرتا ہے۔

C.जर दोन्ही निष्कर्ष I आणि II निघत असल्यास.
C.If both I and II follow
C.دونوں I اور II پیروی کرتے ہیں۔

D.जर दोन्ही निष्कर्ष I आणि II निघत नसल्यास.
D.If neither I nor II follows
D.نہ تو I نہ ہی II پیروی کرتا ہے۔

Answer: C.जर दोन्ही निष्कर्ष I आणि II निघत असल्यास.
C.If both I and II follow
C.دونوں I اور II پیروی کرتے ہیں۔

70 प्रभावी संवाद प्राप्तकर्त्यामध्ये निर्माण करतो

An effective communication produces in receiver—

ایک مؤثر مواصلات وصول کنندہ میں پیدا کرتا ہے—

A.आनंद
A.Happiness
A. خوشی

B.स्वीकृती
B.Acceptance
B. قبولیت

C.लोकांपर्यंत पोहचणे
C.Its access to other people
C. دیگر لوگوں تک اس کی رسائی

D.विचार करणे
D.Thinking
D. غور و فکر

Answer: B.स्वीकृती
B.Acceptance
B. قبولیت

71 Fill in the blank with the correct article.
My mother is _____honest woman.

A.an

B.a

C.the

D.No article required

Answer: A.an

72

सूचना: दिलेल्या चारांपैकी वेगळी (असंबद्ध) असणारी आकृती शोधून काढा.

DIRECTIONS: Find the odd from the given four figures.

ہدایات: دی گئی 4 تصاویر میں سے متفرق تلاش کریں-



A. (A)

B. (B)

C. (C)

D. (D)

Answer: D. (D)

73

सूचना: खालील प्रश्नात एक आकृतिबंध दाखविला आहे आणि तो कळीची आकृती म्हणून नोंदला आहे. कागदाच्या मागच्या बाजूने बघितल्यास मूळची कळीची आकृती अचूकपणे कशी दिसेल हे तुम्हाला ठरवायचे आहे.

DIRECTIONS: In the following questions, a design is given, marked as key figure. You have to determine which will be the exact view of the original key figure seen from the reverse side of the paper.

ہدایات: مندرجہ ذیل سوالات میں، ایک ڈیزائن دیا گیا ہے، جس کی اہم تصویر کے طور پر نمایاں کیا گیا ہے- آپ کو اس بات کا تعین کرنا ہوگا کہ کاغذ کے دوسری طرف سے دیکھنے پر اصل اہم تصویر کی صحیح شکل کیا ہو گی-

मुख्य आकृती
Main Figure
اہم تصویر



उत्तरासाठी पर्यायी आकृत्या
Answer Figure
جواب کی تصویر



A. (A)

B. (B)

C. (C)

D. (D)

Answer: D. (D)

74 निर्देश: खालील शब्दांची इंग्रजी शब्दकोशानुसार मांडणी करा.
(a) Partition
(b) Passion
(c) Parlour
(d) Participate
(e) Particle

DIRECTIONS: Arrange the following words according to the English dictionary.
(a) Partition
(b) Passion
(c) Parlour
(d) Participate
(e) Particle

ہدایت: انگریزی لغت کے مطابق مندرجہ ذیل الفاظ کو مرتب کریں۔

Partition (a)
Passion (b)
Parlour (c)
Participate (d)
Particle (e)

A.(b), (e), (a), (d), (c)
A.(b), (e), (a), (d), (c)
A.(b), (e), (a), (d), (c)

B.(e), (c), (a), (d), (b)
B.(e), (c), (a), (d), (b)
B.(e), (c), (a), (d), (b)

C.(a), (e), (c), (d), (b)
C.(a), (e), (c), (d), (b)
C.(a), (e), (c), (d), (b)

D.(c), (d), (e), (a), (b)
D.(c), (d), (e), (a), (b)
D.(c), (d), (e), (a), (b)

Answer: D.(c), (d), (e), (a), (b)
D.(c), (d), (e), (a), (b)
D.(c), (d), (e), (a), (b)

75 ज्या भावात्मक विकारात एक व्यक्ती एका टोकाच्या मनःस्थितीतून दुसरीत आंदोलने घेतो तिचे वर्गीकरण असे करतात.

An affective disorder in which a person swings from one mood extreme to another is classified as

ایک موثر مرض جس میں ایک شخص کامزاج ایک طرف سے دوسری طرف انتہا کوپہنچ جاتا ہے اس کی زمرہ بندی کی جاتی ہے بطور

A.वेड
A.Maniac
A.جنونی

B.नैराश्य
B.Depression
B.ڈپریشن

C.एकधृवी
C.Unipolar
C.غیرقطبی

D.द्विधृवीय
D.Bipolar
D.دو قطبی

Answer: A.वेड
A.Maniac
A.جنونی

76 Out of the given options, choose the one which is the correct passive voice of the sentence given below.
Which newspaper do you read?

A.What is the name of the newspapers that you read?

B.What newspapers are read by you?

C.You read which newspapers?

D.Which newspaper is read by you?

Answer: D.Which newspaper is read by you?

77	सूचना: दिलेल्या पर्यायांमधून वेगळे ते निवडा. DIRECTIONS: Choose the odd one out from the given alternatives. سمت: دیے گئے متبادل میں سے بے جوڑ کو چنیں۔
	A.भाजी विक्रेता A.Greengrocer A.سبزی فروش
	B.फळविक्रेता B.Fruitsellar B.پھل فروش
	C.डाकवाला C.Postman C.ڈاکیہ
	D.दूधवाला D.Milkman D.دودھ والا
Answer:	C.डाकवाला C.Postman C.ڈاکیہ

78 सूचना: दोन विधाने आणि त्यानंतर दोन निष्कर्ष, I आणि II दिले आहेत. ही विधाने सामान्यतः ज्ञात वस्तुस्थितीपेक्षा भिन्न असली तरी सत्य आहेत असे समजा. दिलेल्यापैकी कोणता निष्कर्ष दिलेल्या विधानांवरुन नक्की काढता येऊ शकतो हे तुम्ही ठरवायचे आहे.तुमचे उत्तर सूचित करा.
विधाने:
सर्व प्राणी पक्षा आहेत.
काही प्राणी मानव आहेत.
निष्कर्ष:
I. काही मानव पक्षी आहेत.
II. काही पक्षी मानव आहेत.

DIRECTION: Two statements are given following by two conclusions, I, and II. You have to consider that statements to be true, even if they seem to be at variance from commonly known facts. You are to decide which of the given conclusions can definitely be drawn from the given statements. Indicate your answer.

Statements:
All animals are birds.
Some animals are human beings.

Conclusion:
I. Some human beings are birds.
II. Some birds are human beings.

ہدایات: دو سٹیٹمنٹ جوکہ دو خلاصوں پر مشتمل ہیں .I اور II. اپ کو وہ سٹیٹمنٹ درست ماننا ہے، اگرچہ دکہنے میں وہ بہت سارے حقاٰئق ست مطبقت رکہتی ہو۔ اپ کو دیے گے خلاصوں میں سے یقینی طور پر اسے اختیار کرنا ہے جو سٹیٹمنٹ سے نکلا ہو. اپنا جواب تلاش کرے.

اظہار بیان:
تمام جانور پرندے ہوتے ہے
کچھ جانور انسان ہوتے ہے.
نتائج:
I.کچھ انسان پرندے ہوتے ہے.
II.کچھ پرندے انسان ہوتے ہے.

A.I निष्कर्ष निघेल
A.I follows
A.I تعاقب کرتا ہے

B.II निष्कर्ष निघेल
B.II follows
B.II تعاقب کرتا ہے

C.दोन्ही I किंवा II निष्कर्ष निघेल
C.Both I or II follow
C.دونوں I اور II تعاقب کرتے ہے

D.I किंवा II निष्कर्षही निघणार नाही
D.Neither I nor II follows
D.نہ I نہ II تعاقب کرتا ہے

Answer: C.दोन्ही I किंवा II निष्कर्ष निघेल
C.Both I or II follow
C.دونوں I اور II تعاقب کرتے ہے

79 पुरुष, पती आणि डॉक्टर्स यांच्या दरम्यानचे नाते उत्तमरित्या दर्शवणारी आकृती ओळखा.

Identify the diagram that best represents the relationship among Males, Husbands and Doctors.

اس ڈایاگرام کی شناخت کریں جو مردوں، شوہروں اور ڈاکٹروں کے درمیان تعلقات کی سب سے بہترنمائندگی کرتی ہے.

(A) 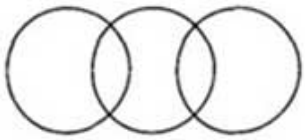

(B) 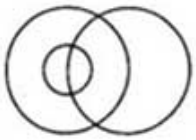

(C) 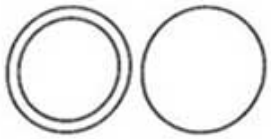

(D) 

Answer: (B) 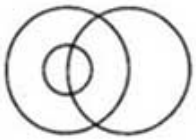

80 सरळ रूप द्या:
94736 – 18000 =?

Simplify:
94736 – 18000 =?

آسان بنائیں:
94736 – 18000= ?

	A.112736 A.112736 A.112736
	B.112000 B.112000 B.112000
	C.70000 C.70000 C.70000
	D.76736 D.76736 D.76736
Answer:	D.76736 D.76736 D.76736
81	रात्री सक्रिय असणारे प्राणी - Animal(s) which is/are active at night - جانور جو رات کے وقت فعال ہیں -
	A.घुबड A.Owl A.اُلّو
	B.उंदीर B.Rat B.چوہا
	C.झुरळे C.Cockroach C. کاکروچ
	D.वरीलपैकी सर्व D.All the above D. تمام مندرجہ بالا
Answer:	D.वरीलपैकी सर्व D.All the above D. تمام مندرجہ بالا

82 वन्यजीव आठवडा कधीपासून कधीपर्यत साजरा केला जातो

The Wildlife Week is celebrated from

وائلڈ لائف ہفتہ منایا جاتا ہے

A.2-8 ऑक्टोबर
A.2-8 October
A. 2-8 اکتوبر

B.1-7 जुन
B.1-7 June
B. 1-7 جون

C.16-22 एप्रील
C.16-22 April
C. 16-22 اپریل

D.14-20 जानेवारी
D.14-20 January
D. 14-20 جنوری

Answer: A.2-8 ऑक्टोबर
A.2-8 October
A. 2-8 اکتوبر

83 जर हवेला जमीन म्हटले, जमिनीला आवाज म्हटले, आवाजाला पाणी म्हटले, पाण्याला नदी म्हटले, नदीला समुद्र म्हटले, आणि समुद्राला ऑक्सिजन म्हटले, तर आपण काय पितो?

If air is called land, land is called noise, noise is called water, water is called river, river is called sea and sea is called oxygen, what do we drink?

اگر ہوا کو زمین، زمین کوشور، شور کو پانی، پانی کو ندی، ندی کو سمندر اور سمندر کو آکسیجن کہا جائے، تو ہم کیا پیتے ہیں؟

A.नदी
A.River
A.ندی

B.समुद्र
B.Sea
B.سمندر

C.पाणी
C.Water
C.پانی

D.आवाज
D.Noise
D.شور

Answer: A.नदी
A.River
A.ندی

84 खालीलपैकी काय पावसाच्या दिवशी प्रथम पाहिले किंवा ऐकले जाऊ शकते?

Which of the following can be seen or heard first on a rainy day?

مندرجہ ذیل میں سے کیا کسی بارش کے دن سب سے پہلے دیکھا یا سنا جا سکتا ہے؟

A.विजा चमकणे
A.Lightning
A.آسمانی بجلی

B.ढगांचा गडगडाट
B.Roaring of clouds
B.بادلوں کا گرجنا

C.इंद्रधनुष्य
C.Rainbow
C.رنبو (قوس و قزح)

D.चंद्र
D.Moon
D.چاند

Answer: A.विजा चमकणे
A.Lightning
A.آسمانی بجلی

85 Choose the word which is most similar in meaning to the given word.
SUBSTANTIAL

A.Considerable

B.Worthless

C.Negligible

D.Slight

Answer:	A.Considerable

86	खालीलपैकी शुद्ध शब्द कोणता ?
	A.कनीष्ठिका
	B.कनिष्ठिका
	C.कनिष्ठीका
	D.कानीष्ठिका
Answer:	B.कनिष्ठिका

87 सूचना: खालील प्रश्नांमध्ये दिलेल्या पर्यायांमधून संबंधित अक्षर/शब्द/संख्या निवडा.

अग्नी : गरम : : बर्फ : ?

DIRECTIONS: In the following question, select the related letter/word/number from the given alternatives.

Fire : Hot : : Ice : ?

سمت: مندرجہ ذیل سوال میں، دیے گئے متبادل سے متعلقہ حرف/لفظ/نمبر منتخب کریں۔

آگ : گرم : : برف : ؟

A.थंड
A.Cold
A.ٹھنڈا

B.पाणी
B.Water
B.پانی

C.हिम
C.Snow
C.برف

D.भट्टी
D.Furnace
D.آتش دان

Answer: A.थंड
A.Cold
A.ٹھنڈا

88 11th जुलै यासाठी साजरा केला जातो

11th July is celebrated as

11جولائی منایا جاتا ہے

A.जागतिक स्वास्थ दिन
A.World Health Day
A. دنیا کی یوم صحت

B.जागतिक लोकसंख्या दिन
B.World Population Day
B. دنیا کی یوم آبادی

C.अंतरराष्ट्रीय महिला दिन
C.International Women Day
C. انٹرنیشنل ویمن ڈے

D.जागतिक जल दिन
D.World Water Day
D. ورلڈ واٹر ڈے

Answer: B.जागतिक लोकसंख्या दिन
B.World Population Day
B. دنیا کی یوم آبادی

89 एका घनाला रंगवून किमान शक्य संख्येचे काप करून 72 लहान पण एकसारख्या तुकड्यांमध्ये कापले गेले आहे. घन कापण्यासाठी आवश्यक असलेल्या कापांची किमान संख्या काय आहे ?

A cube is painted and cut into 72 smaller but identical pieces by making the minimum possible number of cuts. What is the minimum number of cuts required to cut a cube?

ایک کیوب کو ایک جیسے 72 ٹکڑوں میں رنگ دے کر کاٹا گیا ہے۔ کم سے کم ممکن کٹ لگاتے ہوئے, کیوب کو کاٹنے کے لئے کم سے کم کتنے کاٹ کی ضرورت پڑے گی؟

A.12
A.12
A.12

B.8
B.8
B.8

C.6
C.6
C.6

D.10
D.10
D.10

Answer: D.10
D.10
D.10

90 ‘लोचट’ या शब्दाचा समानार्थी शब्द कोणता ?

A.लाजरा

B.बुजरा

C.निस्पृह

D.निर्लज्ज

Answer: D.निर्लज्ज

91 120 ते 130 श्रेणी मध्ये आय क्यू बुद्धिमत्तेची_____पातळी दर्शवतो.

An IQ in the range of 120 – 130 shows _____ level of Intelligence.

120 سے 130 کے مابین ایک آئی کیو ، _____ درجے کی ذہانت کو ظاہر کرتا ہے۔

A.उत्कृष्ट
A.Superior
A. اعلی

B.सर्वसाधारण
B.Average
B.اوسط

C.अती उत्कृष्ट
C.Very superior
C. اعلی ترین

D.मर्यादित
D.Borderline
D. بارڈر لائن) سطحی لائن)

Answer: A.उत्कृष्ट
A.Superior
A. اعلی

92

एका व्यक्तीचे वय त्याच्या 10 वर्षांपूर्वीच्या वयापेक्षा 125% आहे, पण तो 10 वर्षांनी असेल त्यापेक्षा ते $83\frac{1}{3}$ % आहे. त्याचे वर्तमान वय:

A man's age is 125% of what it was 10 years ago, but $83\frac{1}{3}$ % of what it will be after 10 years. His present age is:

ایک آدمی کی عمر اس کی 10 سال پہلے کی عمر کا125% ہے، لیکن 10 سال بعد کی عمر کا $83\frac{1}{3}$ فیصد ہے. اس کی موجودہ عمر یہ ہے:

A. 48

B. 49

C. 51

D. 50

Answer: D. 50

93 सूचना: दिलेली माहिती काळजीपूर्वक वाचा आणि खालील प्रश्नांची उत्तरे द्या.
सहा मित्र P, Q, R, S, T आणि U वेगवेगळ्या कंपन्यांत काम करतात, जसे - गुगल, ऑरेकल, प्रोमेट्रिक, ऍपल, फेसबुक आणि टाटा आणि प्रत्येकजण कंपनी प्रायोजित वेगवेगळ्या रंगाचे शर्ट घालतात, उदा. पांढरा, काळा, शेंदरी, पिवळा, हिरवा आणि करडा पण हे त्याच क्रमाने असतील असे नाही.
I. ज्याने पांढरा शर्ट घातला आहे तो ऍपलमध्ये काम करतो आणि ज्याने काळा शर्ट घातला आहे तो गुगल मध्ये काम करतो.
II. U हा प्रोमेट्रिक किंवा फेसबुकमध्ये काम करत नाही.
III. P हा शेंदरी रंगाचा शर्ट वापरतो आणि ऑरेकल मध्ये काम करतो.
IV. S फेसबुकमध्ये काम करीत नाही आणि प्रोमेट्रिक हिरव्या रंगाच्या शर्टाला प्रायोजित केलेले नाही.
V. T टाटामध्ये काम करतो आणि S किंवा N दोघेही ऍपल मध्ये काम करत नाही.
VI. फेसबुक हिरव्या किंवा पिवळ्या रंगाचे शर्ट प्रायोजित करत नाहीत आणि R गुगल मध्ये काम करतो.
प्रोमॅट्रिकने कोणत्या रंगाचा टीशर्ट प्रायोजित केला आहे

DIRECTIONS: Read the following information carefully and answer the questions that follow.
Six friends P,Q,R,S,T and U works in different companies namely— Google, Oracle, Prometric, Apple, Facebook and Tata and each wears different coloured company- sponsored shirts, viz., White, Black, Orange, Yellow, Green and Grey though not necessarily in the same order.
I. The one wearing the white shirt works in Apple and the one wearing the black shirt works in Google.
II. U does not work in Prometric or Facebook.
III. P wears orange shirt and works in Oracle.
IV. S does not work in Facebook and green coloured shirt is not sponsored by Prometric.
V. T works in Tata, and neither S nor Q works in Apple.
VI. Facebook does not sponsor green or yellow coloured shirts and R works in Goole.
Which colour shirt is sponsored by Prometric?

ہدایات: مندرجہ ذیل معلومات کو دھیان سے پڑھیں اور نیچے دیے گئے سوالوں کے جواب دیں۔
مختلف کمپنیوں میں کام کرتے ہیں جن کے نام ہیں – گوگل، اوریکل، پرومیٹرک، ایپل، فیسبک، اور ٹاٹا U اور T، S، R، Q، P چھ دوست اور ہر ایک مختلف رنگ کی کمپنی کی اسپانسر کی ہوئی شرٹ پہنتا ہے جیسے سفید، کالی، نارنگی، پیلی، ہری اور بھوری اگرچہ لازمی طور پر یکساں ترتیب میں نہیں۔
I۔ سفید شرٹ پہننے والا ایپل میں کام کرتا ہے اور کالی شرٹ پہننے والا گوگل میں کام کرتا ہے۔
II- U پرومیٹرک یا فیسبک میں کام نہیں کرتا ہے۔
III- P نارنگی شرٹ پہنتا ہے اور اوریکل میں کام کرتا ہے۔
IV- S فیسبک میں کام نہیں کرتا ہے اور ہرے رنگ کی شرٹ پرومیٹرک کے ذریعہ اسپانسر کی ہوئی نہیں ہے۔
V- T ایپل میں کام کرتا ہے۔ Q نہ ہی S ٹاٹا میں کام کرتا ہے، اور نہ تو
VI گوگل میں کام کرتا ہے۔ R ۔ فیسبک ہرے یا پیلی رنگ کی شرٹ اسپانسر نہیں کرتا ہے اور
پرومیٹرک نے کس رنگ کی شرٹ اسپانسر کی ہے؟

A.पिवळा
A.Yellow
A.پیلا

B.पांढरा
B.White
B.سفید

C.नारंगी
C.Orange
C.نارنگی

D.निर्धारित केले जाऊ शकत नाही.
D.Cannot be determined
D.تعین نہیں کیا جا سکتا ہے

Answer: A.पिवळा
A.Yellow
A.پیلا

94 चाबहार बंदर येथे आहे –

The Chabahar Port is in -

: چباہر پورٹ ہے

A.पाकिस्तान
A.Pakistan
A.پاکستان میں

B.भारत
B.India
B.انڈیا میں

C.अफगानिस्तान
C.Afghanistan
C. افغانستان میں

D.इराण
D.Iran
D. ایران میں

Answer: D.इराण
D.Iran
D. ایران میں

95 अभिनव बिंद्रा यासाठी ज्ञात आहे –

Abhinav Bindra is known for -

: ابھینو بندرا جانے جاتے ہیں

A.नेमबाजी
A.Shooting
A.نشانہ بازی کے لئے

B.तिरंदाजी
B.Archery
B.تیراندازی کے لئے

C.कबड्डी
C.Kabaddi
C.کبڈّی کے لئے

D.बुध्दीबळ
D.Chess
D.شترنج کے لئے

Answer:
A.नेमबाजी
A.Shooting
A.نشانہ بازی کے لئے

96 दिलेल्या शब्दापासून खालील शब्दांपैकी कोणता शब्द तयार केला जाऊ शकत नाही?
CARDIOGRAM

Which of the following word cannot be formed from the given word?
CARDIOGRAM

دیےگیے لفظ سے مندرجہ ذیل الفاظ میں سے کونسا نہیں بنایا جاسکتا ہے؟
'CARDIOGRAM'

A.AEROGRAM
A.AEROGRAM
A.AEROGRAM

B.RADIO
B.RADIO
B.RADIO

C.DIAGRAM
C.DIAGRAM
C.DIAGRAM

D.CARGO
D.CARGO
D.CARGO

Answer:
A.AEROGRAM
A.AEROGRAM
A.AEROGRAM

For More Info And Videos About TAIT-Exam Syllabus And Other Exam Visit My Channel
TAIT च्या 30 प्रश्नपत्रिका PDF
BADSHAHimp Available Request 9765226781
WWW.YouTube.com/BADSHAHimp
Subscribe My Channel

97	एका चांगल्या शिक्षकाचे गुण काय आहेत? What are the traits of a good teacher اچھے معلم کی کیا خصوصیات ہیں
	A.समानुभूती A.Empathy A.ہم گدازی
	B.उत्साह B.Enthusiasm B.جوش ولولہ
	C.शिस्त C.Discipline C.نظم و ضبط
	D.वरीलपैकी सर्व D.All of the above D.درج بالا سبھی
Answer:	D.वरीलपैकी सर्व D.All of the above D.درج بالا سبھی
98	खालीलपैकी अशुद्ध वाक्य कोणते ?
	A.वाचनासाठी त्याला खूप वेळ मिळतो.
	B.त्याला वाचनाची खूप आवड आहे.
	C.तो कंपनीत मोटार दुरुस्तीचे काम करतो.
	D.पहिलवान आखाड्यात तालीमात जातो.
Answer:	D.पहिलवान आखाड्यात तालीमात जातो.
99	संविधानाच्या दोन सत्रामध्ये किमान किती कालाचा अवधी असतो? What is the maximum time-interval between 2 sessions of Parliament? پارلیمنٹ کے 2 سیشن کے درمیان زیادہ سے زیادہ وقفہ کیا ہے؟

For More Info And Videos About TAIT-Exam Syllabus And Other Exam Visit My Channel
TAIT च्या 30 प्रश्नपत्रिका PDF
BADSHAHimp Available Request 9765226781
WWW.YouTube.com/BADSHAHimp
Subscribe My Channel

A.9 महीने
A.9 months
A. 9مہینے

B.3 महीने
B.3 months
B. 3مہینے

C.6 महीने
C.6 months
C. 6مہینے

D.2 महीने
D.2 months
D. 2مہینے

Answer: C.6 महीने
C.6 months
C. 6مہینے

100 ऐनम नैरापासून पूर्वेला 9 मीटर अंतरावर आहे. अनि ऐनमपासून दक्षिणेला 4 मीटर अंतरावर आहे. अमाया अनिपासून पश्चिमेला 6 मीटर अंतरावर आहे. तर नैरा आणि अमाया यांच्यामधे किती अंतर आहे?

Ainam is 9 meter towards the East of Nair. Ani is 4 meter towards the south of Ainam. Amaya is 6 meter towards the west of Ani. What is the distance between the Naira and Amaya?

اینم نائرہ کے مشرق کی طرف 9 میٹر پر ہے۔ آنی اینم کے جنوب کی طرف 4 میٹر پر ہے۔ امایا آنی کے مغرب کی طرف 6 میٹر پر ہے۔ نائرہ اور امایا کے درمیان کتنا فاصلہ ہے؟

A.5 मी.
A.5 m
A.5 میٹر

B.3 मी.
B.3 m
B.3 میٹر

C.6 मी.
C.6 m
C.6 میٹر

D.16 मी.
D.16 m
D.16 میٹر

Answer: A.5 मी.
A.5 m
A.5 میٹر

101 . समजा एखाद्या शिक्षकास तोतरण्याचा त्रास आहे पण व्यवस्थित स्वत:ला सादर केल्यामुळे तो जिंकला. त्यामुळे प्रशासनाकडून फायदा मिळवण्यासाठी तो कोणत्याही थरावर जाऊ शकतो. इतर सहकारी त्याच्यावर खूप जळत आहेत,कारण आपल्यात असलेल्या गुणांच्या सहाय्याने त्याने यशाची प्रत्येक पायरी चढली. आपल्या संस्थेत अश्या व्यक्तीला आपण कसे पहायला पसंद करू?

Suppose a teacher has acute stammering problem but he wins the favour through sycophancy. Therefore he goes to any extent to seek favour from the administration. The other colleagues have great jealousy with him, because he climbed all the progressive ladder through that quality. How would you like such a person in your company?

فرض کریں کہ ایک استاد کو ایکیوٹ سٹیمرنگ مشکلات کا سامنا کرنا پڑتا ہے لیکن وہ سائکوفینی کے ذریعہ اپنا حق حاصل کرلیتا ہے.لہذا وہ انتظامیہ کے حق کو حاصل کرنے کے لئے کسی بھی حد تک جاتا ہے.دوسرے ساتھی اس کے ساتھ بہت حسد کرتے ہیں، کیونکہ اس نے اس معیار کے ذریعے ترقی کے تمام زینے گذار لئے ہیں۔ آپ اپنی معیت میں اس طرح کے شخص کو کیسے پسند کریں گے؟

A.तो सर्वात यशस्वी शिक्षक आहे म्हणून तुम्ही त्याला 'गुरु' समजतात
A.You treat him like your 'Guru' as he is the most successful teacher
A.آپ اس کو اپنے گرو کی طرح تصور کریں گے کیونکہ وہ سب سے زیادہ کامیاب استاد ہے

B.आपण त्याच्यावर टीका करू व त्याचा गैर वापर करणार
B.You criticize and abuse him
B.آپ اس پر تنقید کرتے ہیں اور اس کی تذلیل کرتے ہیں

C.आपण त्याला आपला प्रिय मित्र समजणार
C.You will treat him as his best friend
C.آپ اس کے بہترین دوست کے طور پر پیش آئیں گے

D.आपण त्याचे नैतिक धैर्य वाढवण्यासाठी, योग्य व अयोग्य गोष्टीमधील फरक दाखवतो
D.You tell him the difference between right and wrong things, to enhance his moral courage.
D.آپ اسکی اخلاقی جرات کو بڑھانے کے لئے حق اور غلط چیزوں کے درمیان فرق بتاتے ہیں.

Answer: D.आपण त्याचे नैतिक धैर्य वाढवण्यासाठी, योग्य व अयोग्य गोष्टीमधील फरक दाखवतो
D.You tell him the difference between right and wrong things, to enhance his moral courage.
D.آپ اسکی اخلاقی جرات کو بڑھانے کے لئے حق اور غلط چیزوں کے درمیان فرق بتاتے ہیں.

102 हिनाने नवीन शाळेमध्ये 3 एप्रिल 2011 ला प्रवेश घेतला आणि 30 मार्च 2013 ला तिने शाळा सोडली. तर ती त्या शाळेत किती दिवस होती?

Heena joined a new school on 3 April 2011 and left on 30 March 2013. How long did she study in the school?

حنا نے 3 اپریل 2011 کو ایک نیا اسکول جوائن کیا اور 30 مارچ 2013 کو چھوڑ دیا۔ اس نے اسکول میں کتنے دن پڑھائی کی؟

A.730 दिवस
A.730 Days
A. 730دن

For More Info And Videos About TAIT-Exam Syllabus And Other Exam Visit My Channel
TAIT च्या 30 प्रश्नपत्रिका PDF
BADSHAHimp Available Request 9765226781
WWW.YouTube.com/BADSHAHimp
Subscribe My Channel

B.729 दिवस
B.729 Days
B. 729دن

C.728 दिवस
C.728 Days
C. 728دن

D.828 दिवस
D.828 Days
D. 828دن

Answer: C.728 दिवस
C.728 Days
C. 728دن

103 शोधणे 8/3 × 270 = ?

Find 8/3 × 270 = ?

معلوم کریں
8/3 × 270= ?

A.710
A.710
A.710

B.720
B.720
B.720

C.730
C.730
C.730

D.920
D.920
D.920

Answer: B.720
B.720
B.720

For More Info And Videos About TAIT-Exam Syllabus And Other Exam Visit My Channel
TAIT च्या 30 प्रश्नपत्रिका PDF
BADSHAHimp Available Request 9765226781
WWW.YouTube.com/BADSHAHimp
Subscribe My Channel

104

दिलेल्या पर्यायांपैकी कोणती आकृती मुख्य आकृतीचे अचूक प्रतिबिंब आहे?

Which of the answer figure is exactly the mirror image of the given figure?

جواب کی کون سی تصویر، دی گئی تصویر کی بالکل صحیح آئینہ دار تصویر لگتی ہے؟

मुख्य आकृती
Main Figure
اہم تصویر

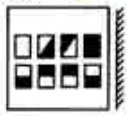

उत्तरासाठी पर्यायी आकृत्या
Answer Figure
جواب کی تصویر

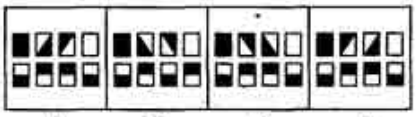

A. (A)

B. (B)

C. (C)

D. (D)

Answer: C. (C)

105 सूचना: दिलेली माहिती काळजीपूर्वक वाचा आणि खालील प्रश्नांची उत्तरे द्या.
सहा मित्र P, Q, R, S, T आणि U वेगवेगळ्या कंपन्यांत काम करतात, जसे - गुगल, ऑरेकल, प्रोमेट्रिक, ऍपल, फेसबुक आणि टाटा आणि प्रत्येकजण कंपनी प्रायोजित वेगवेगळ्या रंगाचे शर्ट घालतात, उदा. पांढरा, काळा, शेंदरी, पिवळा, हिरवा आणि करडा पण हे त्याच क्रमाने असतील असे नाही.
I. ज्याने पांढरा शर्ट घातला आहे तो ऍपलमध्ये काम करतो आणि ज्याने काळा शर्ट घातला आहे तो गुगल मध्ये काम करतो.
II. U हा प्रोमेट्रिक किंवा फेसबुकमध्ये काम करत नाही.
III. P हा शेंदरी रंगाचा शर्ट वापरतो आणि ऑरेकल मध्ये काम करतो.
IV. S फेसबुकमध्ये काम करीत नाही आणि प्रोमेट्रिक हिरव्या रंगाच्या शर्टाला प्रायोजित केलेले नाही.
V. T टाटामध्ये काम करतो आणि S किंवा N दोघेही ऍपल मध्ये काम करत नाही.
VI. फेसबुक हिरव्या किंवा पिवळ्या रंगाचे शर्ट प्रायोजित करत नाहीत आणि R गुगल मध्ये काम करतो.
जर प्रोमॅट्रिक आणि ऍपलने त्यांच्याद्वारे प्रायोजित केल्या जाणा-या शर्टांच्या रंगांची अदलाबदल करायचे ठरवले तर कोणत्या दोन व्यक्तींना आपले शर्ट अदलाबदली करावे लागतील?

DIRECTIONS: Read the following information carefully and answer the questions that follow.
Six friends P,Q,R,S,T and U works in different companies namely— Google, Oracle, Prometric, Apple, Facebook and Tata and each wears different coloured company- sponsored shirts, viz., White, Black, Orange, Yellow, Green and Grey though not necessarily in the same order.
I. The one wearing the white shirt works in Apple and the one wearing the black shirt works in Google.
II. U does not work in Prometric or Facebook.
III. P wears orange shirt and works in Oracle.
IV. S does not work in Facebook and green coloured shirt is not sponsored by Prometric.
V. T works in Tata, and neither S nor Q works in Apple.
VI. Facebook does not sponsor green or yellow coloured shirts and R works in Goole.
If Prometric and Apple decide to interchange the colours of sponsored shirts, then which two persons will have to interchange their shirts?

ہدایات: مندرجہ ذیل معلومات کو دھیان سے پڑھیں اور نیچے دیے گئے سوالوں کے جواب دیں۔
مختلف کمپنیوں میں کام کرتے ہیں جن کے نام ہیں – گوگل، اوریکل، پرومیٹرک، ایپل، فیسبک، اور ٹاٹا U اور T، S، R، Q، P چھ دوست اور ہر ایک مختلف رنگ کی کمپنی کی اسپانسر کی ہوئی شرٹ پہنتا ہے جیسے سفید، کالی، نارنگی، پیلی، ہری اور بھوری اگرچہ لازمی طور پر یکساں ترتیب میں نہیں۔
I۔ سفید شرٹ پہننے والا ایپل میں کام کرتا ہے اور کالی شرٹ پہننے والا گوگل میں کام کرتا ہے۔
II- U پرومیٹرک یا فیسبک میں کام نہیں کرتا ہے۔
III- P نارنگی شرٹ پہنتا ہے اور اوریکل میں کام کرتا ہے۔
IV- S فیسبک میں کام نہیں کرتا ہے اور ہرے رنگ کی شرٹ پرومیٹرک کے ذریعہ اسپانسر کی ہوئی نہیں ہے۔
V- T ٹاٹا میں کام کرتا ہے، اور نہ تو Q نہ ہی S ایپل میں کام کرتا ہے۔
VI گوگل میں کام کرتا ہے۔ R ۔ فیسبک ہرے یا پیلی رنگ کی شرٹ اسپانسر نہیں کرتا ہے اور
اگر پرومیٹرک اور ایپل اسپانسر کردہ شرٹ کے رنگ کا تبادلہ کرنے کا فیصلہ کریں، تو کن دو لوگوں کو اپنی شرٹ بدلنی پڑے گی؟

A.S आणि U
A.S and U
A.S اور U

B.P आणि R
B.P and R
B.P اور R

C.S आणि T
C.S and T
C.S اور T

D.Q आणि S
D.Q and S
D.Q اور S

Answer: A.S आणि U
A.S and U
A.S اور U

106 च्या दरम्यान कोठेतरी मानसिक वाढ थांबते

Mental growth-stops somewhere between

دماغی ترقی اس کے آس پاس رک جاتی ہے

A.16 आणि 20
A.16 and 20
A.16 20 اور

B.8 आणि 12
B.8 and 12
B.8 12 اور

C.14 आणि 24
C.14 and 24
C.14 24 اور

D.10 आणि 20
D.10 and 20
D.10 20 اور

Answer: A.16 आणि 20
A.16 and 20
A.16 20 اور

107 सूचना: खालील दिलेल्या प्रश्नामध्ये काही विधाने आणि काही निष्कर्ष आहेत. सामन्यात: ज्ञात तथ्यांपेक्षा ते वेगळे असतील तर दिलेली विधाने तुम्हाला सत्य मानवी लागतील आणि त्यानंतर दिलेल्या विधानाचे अनुकरण दिलेल्यापैकी कोणता निष्कर्ष तार्किकदृष्ट्या करतो ते ठरवा.

विधाने:
Y < J = P ≥ R > I
निष्कर्ष:
I. J > I
II. Y < R

DIRECTIONS: In the question given below, there are few statements followed by few conclusions. You have to take the given statements to be true even if they seem to be at variance with commonly known facts and then decide which of the given conclusion logically follow(s) from the given statements.

Statement:
Y < J = P ≥ R > I
Conclusions:
I. J > I
II. Y < R

ہدایات: مندرجہ ذیل سوال میں، کچھ بیانات کے بعد کچھ نتائج موجود ہیں. اگر آپ کو عام طور پر جانے جاتے حقائق کے ساتھ بھی متغیر ہونے لگے تو بھی آپ دئے گئے بیانات دماغ میں رکھیں اور پھر اس بات کا فیصلہ کریں کہ ذیل میں دیا گیا کونسا نتیجہ منطقانہ طور پر دیے گئے بیانات کی پیروی کرتا ہے.

بیان:
Y < J = P ≥ R > I
نتائج:
I. J > I
II. Y < R

A.तर फक्त I निष्कर्ष खरा आहे
A.If only conclusion I is true
A.اگر صرف I نتیجہ درست ہے

B.तर फक्त II निष्कर्ष खरा आहे
B.If only conclusion II is true
B.اگر صرف II نتیجہ درست ہے

C.तर I किंवा II यापैकी एक निष्कर्ष खरा आहे
C.If either conclusion I or II is true
C.اگر I اور II نتائج میں سے ایک درست ہے

D.तर I व II हे दोन्हीही निष्कर्ष खरे नाहीत
D.If neither conclusion I nor II is true
D.اگر I اور II نتائج میں سے کوئی بھی درست نہیں

Answer: A.तर फक्त I निष्कर्ष खरा आहे
A.If only conclusion I is true
A.اگر صرف I نتیجہ درست ہے

108 सूचना: प्रत्येक प्रश्नाला एक प्रमुख विधानासोबत चार विधाने आहेत ज्यांच्याखाली A, B, C आणि D असे चार विधान आहेत. क्रमवार विधानांची जोडी निवडा ज्यामध्ये प्रथम विधान दुसऱ्या विधानाला सुचवते, आणि दोन्ही विधाने तर्किकदृष्ट्या प्रमुख विधानासोबत निगडित असेल.

जेव्हा तुम्ही बॉल खेळता, तेव्हा तुम्हाला आनंदी वाटते
A. तुम्ही बॉल खेळलात
B. तुम्ही बॉल खेळला नाहीत
C. तुम्हाला आनंदी वाटले
D. तुम्हाला आनंदी वाटले नाही

DIRECTIONS: Each question has a main statement followed by four statements labelled A, B, C and D. Choose the ordered pair of statements, where the first statement implies the second, and the two statements are logically consistent with the main statement.

When you play with ball , you feel playful
A. you played with ball
B. you did not play with ball
C. you felt playful
D. you did not feel playful

ہدایت: ہر سوال میں ایک جملہ ہے جسکے بعد چار جملےاے، بی،سی اور ڈی کے نام سے دئے گئے ہیں اسمیں منسلک جوڑیوں کو چنئے۔ جہاں پہلا جملہ دوسرے جملہ کی اور اشارہ کر رہا ہے اور دو جملے منطقی مرکزی بیان کے مطابق ہیں

جب آپ گیند سے کھیلتے ہیں تو خوشی محسوس کرتے ہیں
Aآپ گیند سے کھیلے ۔
Bآپ گیند سے نہیں کھیلے ۔
Cآپ کو خوشی ہوئی ۔
Dآپ کو خوشی نہیں ہوئی ۔

A.AC
A.AC
A.AC

B.BC
B.BC
B.BC

C.DA
C.DA
C.DA

D.CD
D.CD
D.CD

Answer: A.AC
A.AC
A.AC

109 भावनात्मकरित्या बुद्धिमान व्यक्तीचे गुण

Characteristics of emotionally intelligent persons

جذباتی طور پر ذہین اشخاص کی خصوصیات ہیں:

A.आपल्या जाणीवा आणि भावनांसाठी चिकाटी असणे आणि संवेदनशील असणे.
A.Perceive and be sensitive to your feelings & emotions.
A.۔وہ آپ کے احساسات وجذبات کو سمجھتا اور ان کے تئیں حساس رہتا ہے

B.आपल्या भावनांसाठी चिकाटी आणि संवेदनशील असणे.
B.Perceive and be sensitive to various types of emotions.
B.۔وہ مختلف طرح کے جذبات کو سمجھتا اور ان کے تئیں حساس رہتا ہے

C.निसर्गाचे प्रभाव,सामर्थ्य आणि आपल्या भावनांची तीव्रता समजा
C.Understand the power influence of the nature and intensity of your emotions.
C.۔وہ آپ کے جذبات کی نوعیت اور ان کے میلانات میں مؤثر طاقت کو سمجھتا ہے

D.यापैकी सर्व
D.All of these
D.۔یہ ساری خصوصیات

Answer: D.यापैकी सर्व
D.All of these
D.۔یہ ساری خصوصیات

110 एका फोटोतील स्त्रीकडे बोट दाखवून एक पुरुष म्हणतोः “ती माझ्या वडिलांच्या सासूची एकुलती मुलगी आहे.” ती स्त्री आणि त्या पुरुषासोबत नाते काय?

Pointing to a woman in a photograph a man says: “She is the only daughter of my father’s mother-in-law”. How is the woman related to the man?

تصویر میں عورت کی طرف اشارہ کرکے آدمی نے کہا: " یے میرے باپ کی ساس کی واحد بیٹی ہے". عورت کا آدمی سے کیا رشتہ تھا؟

A.मुलगी
A.Daughter
A.بیٹی

B.आई
B.Mother
B.ماں

C.सून
C.Daughter-in-law
C.بہو

D.सासू
D.Mother-in-law
D.ساس

Answer: B.आई
B.Mother
B.ماں

111 ‘ गवीश्वर ’ या शब्दाची संधी सोडवा.

A.ग + ईश्वर

B.गा + ईश्वर

C.गो + ईश्वर

D.गाय + ईश्वर

Answer: C.गो + ईश्वर

112 अनुक्रम 11, 22, 33,..... चे 5वे पद शोधा

Find the 5th term of the sequence: 11, 22, 33,.....

اس سرج کی پانچوی ٹرم کیا ہے ؟: 11, 22, 33,.....

A.33
A.33
A.33

B.55
B.55
B.55

C.44
C.44
C.44

D.66
D.66
D.66

Answer: B.55
B.55
B.55

113 सूचना: खालील प्रश्नांमध्ये दिलेल्या पर्यायांमधून संबंधित अक्षर/शब्द/संख्या निवडा.

दिलेला संच : (9, 49, 121)

DIRECTIONS: In the following question, select the related letter/word/number from the given alternatives.

Given set : (9, 49, 121)

سمت: مندرجہ ذیل سوال میں، دیے گئے متبادل سے متعلقہ حرف/لفظ/نمبر منتخب کریں۔

(دیا گیا سیٹ: (9, 49, 121

A.(1, 9, 25)
A.(1, 9, 25)
A.(1, 9, 25)

B.(4, 9, 25)
B.(4, 9, 25)
B.(4, 9, 25)

C.(81, 36, 49)
C.(81, 36, 49)
C.(81, 36, 49)

D.(25, 36, 49)
D.(25, 36, 49)
D.(25, 36, 49)

Answer: B.(4, 9, 25)
B.(4, 9, 25)
B.(4, 9, 25)

114	निर्देश: दिलेल्या अंक मालिकेतील चुकीची संज्ञा शोधा: 3, 5, 11, 29, 87, 245 DIRECTIONS: Find the wrong term in the given number series: 3, 5, 11, 29, 87, 245 ہدایت دے گئے نمبرس سرج مے غلط نمبر کھوجے 3, 5, 11, 29, 87, 245
	A.87 A.87 A.87
	B.11 B.11 B.11
	C.29 C.29 C.29
	D.245 D.245 D.245
Answer:	A.87 A.87 A.87
115	**सूचना:** दिलेल्या पर्यायांमधून श्रेणी पूर्ण करणारी योग्य आकृती निवडा. **DIRECTIONS:** Complete the series by choosing right figure from the given choices. ہدایات: دیئے گئے انتخابات میں سے صحیح تصویر کو منتخب کرکے سلسلہ مکمل کریں۔ **Problem Figures** 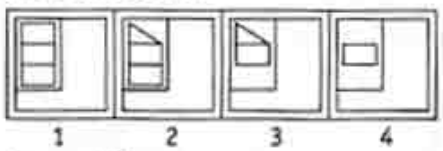 1 2 3 4 **Answer Figures** 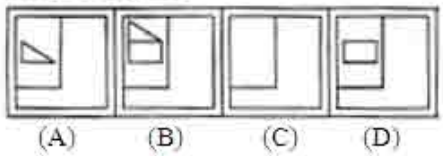 (A) (B) (C) (D)

	A. (A)
	B. (B)
	C. (C)
	D. (D)
Answer:	C. (C)

116	Out of the given four words only one is spelt correctly. Find the word that is correctly spelt.
	A.Ecstasy
	B.Facinating
	C.Extreem
	D.Fearce
Answer:	A.Ecstasy

117 सूचना : खालील प्रत्येक प्रश्नात दोन विधाने I आणि II दिलेले आहेत. हे विधान एकतर स्वतंत्र कारण असू शकतात किंवा स्वतंत्र कारणांचे परिणाम असू शकतात. यांपैकी एक विधान इतर विधानाचा परिणाम असू शकतो. दोन्ही विधाने वाचा आणि खालीलपैकी कोणत्या उत्तराचा पर्याय या दोन्ही विधानांमधील संबंधांचे वर्णन करतो ते ठरवा.

विधान :
I. सेन्सेक्सने शेयर बाजारात ४००० चा पल्ला ओलांडला आहे, ही गेल्या १२ आठवड्यातील सर्वोच्च संख्या आहे.
II. सरकारने या वर्षाचे बजेट जाहीर केले आहे.

DIRECTIONS: Below in each question are given two statements I and II. These statements may be either independent causes or may be effects of independent causes. One of these statements may be the effect of the other statement. Read both the statements and decide which of the following answer choice correctly depicts the relationship between these two statements.

Statements:
I. The sensex crossed 4000 point mark in the stock exchange, the highest mark in last 12 weeks.
II. The government announces the budget for the year.

ہدایات: نیچے ہر سوال میں دو بیانات I اور II آ تو یہ بیانات یا ان دیے گئے ہیں۔ آزاد وجوہات یا پھر آزاد وجوہات کے اثرات ہو سکتے ہیں۔ بیانات میں سے ایک بیان دوسرے کا اثر ہو سکتا ہے۔دونوں بیانات پڑھیں اور فیصلہ کریں کہ نیچے دیے گئے کس جواب کا انتخاب ان دونوں بیانات کے در میان تعلق کو ٹھیک سے ظاہر کرتا ہے۔

بیانات:
I – سنسکس نے اسٹاک ایکسچینج میں 4000 پوائنٹس کی حد عبور کی ہے جو 12 ہفتوں میں بلند ترین ہے۔
II ۔ حکومت نے سال کے لیے بجٹ کا اعلان کیا ہے۔

A.I हा परिणाम आहे आणि II हे त्याचे तात्काळ आणि प्रमुख कारण आहे;
A.I is effect and II is its immediate and principal cause;
A. بیان نمبر I اس کی فوری اور بنیادی وجہ ہے۔ II اثر ہے اور بیان نمبر

B.I हे तात्काळ आणि प्रमुख कारण आहे आणि II हा त्याचा परिणाम आहे
B.I is the immediate and principal cause and II its effect;
B. بیان نمبر I اس کا اثر ہے۔ II فوری اور بنیادی وجہ ہے اور بیان نمبر

C.I हा परिणाम आहे परंतु II हे त्याचे तात्काळ आणि प्रमुख कारण नाही;
C.I is an effect but II is not its immediate and principal cause;
C. بیان نمبر I اس کی فوری اور بنیادی وجہ نہیں ہے۔ II اثر ہے لیکن بیان نمبر

D.II हा परिणाम आहे परंतु I हे त्याचे तात्काळ आणि प्रमुख कारण नाही
D.II is an effect but I is not its immediate and principal cause;
D. بیان نمبر II اس کی فوری اور بنیادی وجہ نہیں ہے۔ I اثر ہے لیکن بیان نمبر

Answer: A.I हा परिणाम आहे आणि II हे त्याचे तात्काळ आणि प्रमुख कारण आहे;
A.I is effect and II is its immediate and principal cause;
A. بیان نمبر I اس کی فوری اور بنیادی وجہ ہے۔ II اثر ہے اور بیان نمبر

118	18540852 खालीलपैकी कोणासोबत विभाज्य आहे? 18540852 is divisible by which of the following? 18540852 مندرجہ ذیل میں کس سے قابل تقسیم ہے؟
	A.11 A.11 A.11
	B.7 B.7 B.7
	C.9 C.9 C.9
	D.5 D.5 D.5
Answer:	A.11 A.11 A.11
119	कॅल्विन मोजपट्टीवर0oसें चे योग्य मुल्य आहे: The correct value of 0oC on the Kelvin scale is: 0oC کیلوین اسکیل کا صحیح ویلو ہے:
	A.273 के A.273 K A.273 K
	B.273.15 के B.273.15 K B.273.15 K
	C.275.15 के C.275.15 K C.275.15 K
	D.270 के D.270 K D.270 K

Answer: B.273.15 के
B.273.15 K
B.273.15 K

120 खालील आकृतीमध्ये किती षट्कोन आहेत?

How many hexagons are there in the following figure?

مندرجہ ذیل تصاویر میں کتنے شش پہلو ہیں؟

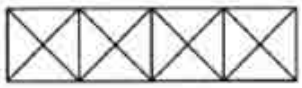

A. 3

B. 2

C. 4

D. 1

Answer: A. 3

121 शारीरिकदृष्ट्या कोरडी मातीचे गुण कसे ओळखावेत?

How to recognize the characteristic of physiologically dry soil?

کس طرح خشک مٹی کی خاصیت کو پہچانا جاتا ہے؟

A.त्यात भरपूर पाणी असते
A.It has plenty of water
A. اس میں پانی کی کافی مقدار ہوتی ہے

B.वनस्पतीसाठी उपलब्ध प्रकाश पुरेसा नसतो
B.Light available to plant is not enough
B. پودوں کو دستیاب روشنی کافی نہیں ہے

C.माती कठीण दगडी असते
C.The soil is hard stony
C. مٹی میں نمک کی مقدار بہت زیادہ ہوتی ہے

D.यांपैकी कोणतेही नाही
D.None of these
D.ان مے سے کوئی نہی

Answer: C.माती कठीण दगडी असते
C.The soil is hard stony
C. مٹی میں نمک کی مقدار بہت زیادہ ہوتی ہے

122 समजा तुमच्या मित्राने त्याच्या मुलासोबत स्कूटर वर घराबाहेर निघाले असता, अचानक तुम्हाला त्यांचे अपघात झाल्याची बातमी कळाली, अश्या परिस्थितीत तुम्ही काय करणार?

Suppose your friend has just left the home on scooter along with his son, immediately you hear the news that they have met with a road accident, what will you do in this case?

فرض کریں کہ آپ کا دوست اپنے بیٹے کے ساتھ سکوٹر پر گھر سےنکلا ہے، فورا آپ خبریں سنتے ہیں کہ وہ سڑک حادثے کا شکار ہو گئے ہیں، آپ اس صورت میں کیا کریں گے؟

A.आपले त्याच्याशी दूरचे नाते असल्यामुळे आपण त्याची थट्टा करणार
A.You will mock him because you have poor relations with him
A.آپ اس پر ہنسیں گے کیونکہ آپ اس کے ساتھ برے تعلقات رکھتے ہیں

B.) हि वेळ आपल्या वैयक्तिक वैमनस्याची नाही हे लक्षात घेऊन ताबडतोब तिथे जाऊन आपल्याला शक्य ती मदत करणार
B.You will rush immediately and extend all possible help keeping in mind that this is not the time of personal enmity
B.آپ جلدی جلدی جلدی جائیں گے اور ذہن میں یہ رکھتے ہوئے تمام ممکنہ مدد کریں گے کہ یہ ذاتی دشمنی کا وقت نہیں ہے

C.आपण ताबडतोब तिथून निघून जाणार जेणेकरून कोणीही आपल्याला दोष देऊ शकणार नाही
C.You will leave the place immediately so that nobody can blame you later on
C.آپ کو فوری طور پر جگہ چھوڑ دیں گے تاکہ کوئی بھی آپ پر بعد میں الزام نہ دے سکے

D.आपण दुसऱ्या दिवशी त्यांना भेटायला जाणार व स्वत:ची बढाई करण्यासाठी असे दाखवणार जसे कि तुम्हाला याची माहिती आताच शेजाऱ्यांकडून मिळाली
D.You will visit them next day and give an impression that you knew it just now from neighborhood.
D.-آپ اگلے دن ان کا دورہ کریں گے اور تاثر دیتے ہیں کہ آپ کو ابھی ابھی پڑوس سے معلوم ہوا ہے

Answer: B.) हि वेळ आपल्या वैयक्तिक वैमनस्याची नाही हे लक्षात घेऊन ताबडतोब तिथे जाऊन आपल्याला शक्य ती मदत करणार
B.You will rush immediately and extend all possible help keeping in mind that this is not the time of personal enmity
B.آپ جلدی جلدی جلدی جائیں گے اور ذہن میں یہ رکھتے ہوئے تمام ممکنہ مدد کریں گے کہ یہ ذاتی دشمنی کا وقت نہیں ہے

123 ‘कळकळ‘ या शब्दाचा समानार्थी शब्द कोणता ?

A.निरुत्साह

B.बेपर्वाई

C.काळजी

D.अनास्था

Answer: C.काळजी

124 निर्देश: खालील प्रश्न दिलेल्या शब्दांवर आधारित आहेत.

light/ ride/ when/ price

जर दिलेल्या शब्दांमध्ये स्वरांना मागील अक्षराने बदलले तर व्यंजनाची जागा त्याच्या पुढच्या अक्षराने बदलली तर किती शब्दन मध्ये किमान एक स्वर असेल?

DIRECTIONS: Each of the following questions is based on the following given words.

light/ ride/ when/ price

If in the given words vowels are replaced with its previous letter and Consonants are replaced with its next letter then how many words have at least one vowel?

ہدایت جیل کے سوال دے ہے لفجونپر مشتمل ہیں

light/ ride/ when/ price

اگر ان لفجوں مے ہر حرف کو انگریجی حرف تہجیبی کے اگلے حرف سے بدلہ جائے تو صرف یک واول والے کتنے لفج ہونگے؟

A.एक
A.One
A.ایک

B.दोन
B.Two
B.دو

C.तीन
C.Three
C.تین

D.चार
D.Four
D.چار

Answer: C.तीन
C.Three
C.تین

125 पांढरे कपडे काळ्यापेक्षा थंड असतात कारण ते?

White clothes are cooler than black ones because they -

سفید کپڑے کالے کپڑے کے مقابلے ٹھنڈے ہوتے ہیں کیونکہ؟

A.त्यांच्यापर्यंत पोहोंचलेला प्रकाश शोषुन घेतात
A.Absorb all the light that reaches them
A.وہ اپنے تک پہنچنے والی سبھی روشنی کو جذب کر لیتے ہیں

B.त्यांच्यापर्यंत पोहोंचलेला सर्व प्रकाश परावर्तित करतात
B.Reflect all the light that reaches them
B.اپنے تک پہنچنے والی سبھی روشنی کو منعکس کر دیتے ہیں

C.प्रकाशाला प्रवेश करण्याची परवानगी देत नाहीत
C.Will not allow the light to penetrate
C.روشنی کو اندر گھوسنے نہیں دیں گے

D.सुर्यप्रकाशाला पूर्णपणे थंड करतात.
D.Cool the sun light completely
D.سورج کی روشنی کو مکمل طور پر ٹھنڈا کردیتے ہیں

Answer: B.त्यांच्यापर्यंत पोहोंचलेला सर्व प्रकाश परावर्तित करतात
B.Reflect all the light that reaches them
B.اپنے تک پہنچنے والی سبھی روشنی کو منعکس کر دیتے ہیں

126 शाळेत साजरा होत असलेल्या पालक-शिक्षक संघटनेच्या संध्याकाळी आयोजित मेळाव्यात आपण विद्यार्थ्यांच्या पालकांशी कसे वागाल?

How would you behave with student’s parents on the eve of parent-teacher association being observed in the school?

آپ طالب علم کے والدین کے ساتھ اسکول میں والدین و استاد ایسوسی ایشن کی شام میں مشاہدے کے وقت کس طرح پیش آئیں گے؟

A.असमाधानकारकपणे, स्वार्थपूर्णतेने व त्यांना भेटवस्तू आणण्यास भाग पाडणार ईत्यादी.
A.Poorly, full of selfishness and forced them to oblige with gifts etc.
A.-کمزور، خود غرضی سے بھری ہوئی اور انہیں تحفے وغیرہ کے لئے مجبور کریں گے

B.सुदैवाने, जर शिक्षकांनी योग्य काळजी घेतल्यामुळे पालकांना समाधान वाटणार
B.Nicely, so the parents can feel satisfied that the teacher has given due care
B.اچھی طرح سے، لہذا والدین مطمئن ہوسکتے ہیں کہ اساتذہ نے اس کی اچھی دیکھ بھال کی ہے

C.निष्क्रीयतेने कारण आपल्याला वाटणार हे विद्यार्थी आपल्या सोबत फक्त एकच वर्ष राहणार म्हणून यांचे शोषण केलेले बरे
C.Passively because you feel that the students are only for one year with you so it is better to exploit them
C.ممکنہ طور پر کیونکہ آپ محسوس کرتے ہیں کہ طالب علم صرف آپ کے ساتھ ایک سال کے لئے ہیں لہذا ان کا استحصال کرنا بہتر ہے

D.मनाची तयारी नसताना देखील
D.Uninterestingly devoid of emotionality.
D.بغیر دلچسپی کے طور پر، جذبات سے محروم.

Answer: B.सुदैवाने, जर शिक्षकांनी योग्य काळजी घेतल्यामुळे पालकांना समाधान वाटणार
B.Nicely, so the parents can feel satisfied that the teacher has given due care
B.اچھی طرح سے، لہذا والدین مطمئن ہوسکتے ہیں کہ اساتذہ نے اس کی اچھی دیکھ بھال کی ہے

127 सूचना: अर्थपूर्ण परिच्छेद निर्माण करण्यासाठी, खाली दिलेली (P), (Q) (R), (S) आणि (T) ही पाच वाक्ये योग्य अनुक्रमाने पुनर्रचना करा; त्यांनतर खालील प्रश्नांची उत्तर द्या.

P. त्यामुळे एकमेकांशी लढून गिधाडांचे खाद्य बनण्यापेक्षा तडजोड करणे आणि मित्र असणे चांगले असे डुक्कर आणि सिंह दोघे ठरवतात.
Q. तो एक गरम उन्हाळाचा दिवस होता. पाणी पिण्यासाठी एका छोट्या तळ्याजवळ सिंह आणि डुक्कर येतात.
R. ते एकत्र पाणी पितात आणि त्यानंतर आपआपल्या मार्गाला निघून जातात.
S. लवकरच त्यांना कळते कि, गिधाडे त्यांच्यापैकी एक किंवा दोघेही खाली पडण्याची वाट पाहत आहेत, ती त्यांच्यासाठी मेजवानी होती.
T. कोण आधी पाणी पिणार यावरून वाद घालून आणि लढून झाल्यानंतर दम खाण्यासाठी ते थोडावेळ थांबले, तेव्हा त्यांच्या लक्षात आले कि त्यांच्यावर गिधाडे आहेत.

पुनर्रचना केल्यानंतर खालीलपैकी कोणते वाक्य दुसरे असेल?

DIRECTION: Rearrange the following five sentences (P), (Q), (R), (S) and (T) in the proper sequence to form a meaningful paragraph; then answer the questions given below them.
P. The lion and the boar then decide that it was best to make up and be friends than fight and become food for vultures.
Q. It was a hot summer day. A lion and a boar reach a small water body for a drink.
R. They drink the water together and go their ways after.
S. Soon they realize that the vultures are waiting for one or both of them to fall, to feast on them.
T. After arguing and fighting about who should drink first, they get tired and stop for breath, when they notice vultures above.

Which of the following should be the SECOND sentence after rearrangement?

ہدایات: ان پانچ جملوں (P)، (Q)، (R)، (S) اور (T) کو با معنی پیرا بنانے کے لئے دوبارہ ترتیب دیجئے، پھر نیچے دے گئے سوالوں کے جواب دیجئے

P. شیر اور سور نے فیصلہ کیا کہ لاڈیی کرنے اور گدد کہ خانہ بننے سے اچھا ہے کہ ہم صلح کرے اور اچھے دوست بنے.
Q. ایک گرمی کا دن تھا. سور اور شیر پانی پینے پہنچے.
R. انہونے ساتھ میں پانی پیا اور اپنے اپنے راستے پی نکل گئے.
S. جلدی انھ احساس ہوا کہ گدد انمی سے ایک یا دونوں کہ انتظار کر رہا ہے تاکی وو انکا شکار کر سکھ.
T. بہر کرنے اور لاڈیی کرنے کے بعد جب وو تھک گئے اور سان لینے کے لئے بیٹھ گئے، جب انہونے دیکھا کہ گدد انکے اپر بیٹھا تھا.

دوبارہ ترییب دینے کے بعد کون سا جملہ دوسرا ہونا چاہیے؟

A.T
A.T
A.T

B.P
B.P
B.P

C.Q
C.Q
C.Q

D.S
D.S
D.S

Answer: A.T
A.T
A.T

128 खालीलपैकी कोणते प्रतीक एक प्रोटॉन दर्शवते?

Which of the following symbol represents a proton?

مندرجہ ذیل میں سے کونسی علامت ایک پروٹون کی نمائندگی کرتی ہے؟

A.H^+
A.H^+
A.H^+

B.H^-
B.H^-
B.H^-

C.He^+
C.He^+
C.He^+

D.He^-
D.He^-
D.He^-

Answer: A.H^+
A.H^+
A.H^+

129

$$\sqrt{\frac{225}{9}} = ?$$

A. 5

B. 8

C. 12

D. 15

Answer: A. 5

130 ओ डी डी चा लाँग फार्म

ODD stands for

او ڈی ڈی (ODD) کا مطلب ہے:

A.ऑक्युपेशनल डिफँट डिसऑर्डर
A.Occupational defiant disorder
A.آکوپیشنل ڈیفائنٹ ڈس آرڈر

B.ऑव्हरली डिफेंडींग डिसऑर्डर
B.Overly defending disorder
B. اوور لی ڈیفینڈنگ

C.अपोझिश्नल डिफँट डिसऑर्डर
C.Oppositional defiant disorder
C.اپوزیشنل ڈیفائنٹ ڈس آرڈر

D.(a) व (b) दोन्ही
D.Both (a) & (b)
D.الف اور ب دونوں

Answer: C.अपोझिश्नल डिफँट डिसऑर्डर
C.Oppositional defiant disorder
C.اپوزیشنل ڈیفائنٹ ڈس آرڈر

131 खालीलपैकी स्त्रीलिंगी शब्द ओळखा.

A.गुरू

	B.गुरुप्रसाद
	C.गुरुकृपा
	D.गुरुमंत्र
Answer:	C.गुरुकृपा

132	$(11)^3 - (3)^3$ चे मूल्य शोधा = ? Find the value of $(11)^3 - (3)^3$ = ? (11)3 – (3)3 = ? کی قدر معلوم کریں
	A.1304 A.1304 A.1304
	B.1400 B.1400 B.1400
	C.1325 C.1325 C.1325
	D.1425 D.1425 D.1425
Answer:	A.1304 A.1304 A.1304

133	Out of the given options which best expresses the meaning of the given Proverb? Beggars can’t be choosers.
	A.You must accept that which is given to you, especially if you don't have the means to acquire it yourself
	B.Even if you are not left with any choice or resources, you should not compromise and never accept what is being offered to you

C.We should never encourage or promote begging in any form

D.Beggars always have a desire to lead a life full of luxuries and comforts

Answer: A.You must accept that which is given to you, especially if you don't have the means to acquire it yourself

134 ॲमेझोन ही _____ प्रमाणे जगातील सर्वात मोठी नदी आहे

Amazon is the largest river in the world by -

امیزن دنیا کی سب سے لمبی ندی ہے :

A.लांबी
A.Length
A.لمبائی کے حساب سے

B.रुंदी
B.Width
B.چوڑائی کے حساب سے

C.निकासाचे प्रमाण
C.Discharge volume
C.خارج ہونے والی حجم کے حساب سے

D.यांपैकी कोणतेही नाही
D.None of these
D.انمیں سے کوئی نہیں

Answer: C.निकासाचे प्रमाण
C.Discharge volume
C.خارج ہونے والی حجم کے حساب سے

135 DIRECTIONS: A sentence with an underlined word is given below. Find the Word which is most similar in meaning to the underlined word.
They were ecstatic when their team won the championship game in the last second.

A.Overjoyed

B.Mournful

C.Dejected

D.Unenthusiastic

Answer: A.Overjoyed

136 सूचना: खालील प्रश्नांमध्ये दिलेल्या पर्यायांमधून संबंधित अक्षर समूह निवडा.

MTFP : ORIM :: JXRL : ?

DIRECTIONS: In the following question, select the related group of letters from the given alternatives.

MTFP : ORIM :: JXRL : ?

سمت: مندرجہ ذیل سوال میں، دیے گئے متبادل میں سے حروف کا متعلقہ گروپ منتخب کریں۔

MTFP : ORIM :: JXRL : ?

A.LVNU
A.LVNU
A.LVNU

B.LVMU
B.LVMU
B.LVMU

C.LVIU
C.LVIU
C.LVIU

D.LVUI
D.LVUI
D.LVUI

Answer: D.LVUI
D.LVUI
D.LVUI

137 समजा शाळेतील कॅम्पसच्या सुशोभीकरणाची जबाबदारी आपल्यावर सोपवण्यात आली आहे, आपले काही सहकारी आपल्या या विचित्र कामगिरीवर मस्करी करत आहेत. अश्या परिस्थितीत आपण आपल्या भावना कश्या ताब्यात ठेवणार?

Suppose you have been assigned a duty of beautification of school campus, a few colleagues are cracking mild jokes upon you for this unique assignment. How could you control your feelings under this situation?

فرض کریں کہ آپ کو اسکول کے کیمپس کی خوبصورتی کا کام دیا گیا ہے، کچھ ساتھی اس منفرد تفویض کے لئے آپ پر ہلکے مذاق کر رہے ہیں.آپ اس احساس کے تحت اپنے جذبات کو کیسے کنٹرول کرسکتے ہیں؟

A.आपण रागात येतो आणि प्राचार्याच्या कार्यालयात जाऊन आपल्याला सोपवलेल्या कामगिरीच्या विरुध्द आपली तक्रार देणार
A.You become angry and go to the principal's office to register your resentment against the assignment
A.آپ ناراض ہو جاتے ہیں اور پرنسپل کے دفتر جاتے ہیں تاکہ تفویض کے خلاف آپ کے استحصال کو رجسٹر کریں

B.आपण स्वीकारू पण या कामात काही लक्ष देणार नाही
B.You accept it but do not take any interest in the assignment
B.آپ اسے قبول کرتے ہیں لیکن تفویض میں دلچسپی نہیں لیتے

C.हे काम आपल्या क्षमतेच्या पलीकडे असल्यामुळे आपण प्रचार्याकडे अजून काही अतिरिक्त शिक्षक नेमून देण्याची विनंती करू
C.You request the principal to depute a few more teachers as the work is beyond your capacity
C.آپ پرنسپل سے درخواست کرتے ہیں کہ کچھ اور اساتذہ کو شامل کردیں کیونکہ کام آپ کی صلاحیت سے باہر ہے

D.आपण आपले कर्तव्य चांगल्या प्रकारे पार पाडतो त्यामुळे आपल्या सहकार्यांना भविष्यात नाव ठेवण्यासाठी संधी मिळणार नाही
D.You do the duty in a better way so the colleagues never get an opportunity to make remarks in future.
D.آپ بہتر طریقے سے فرض انجام دیتے ہیں تاکہ ساتھیوں کو کبھی مستقبل میں تنقید کرنے کا کوئی موقع نہ ملے.

Answer: D.आपण आपले कर्तव्य चांगल्या प्रकारे पार पाडतो त्यामुळे आपल्या सहकार्यांना भविष्यात नाव ठेवण्यासाठी संधी मिळणार नाही
D.You do the duty in a better way so the colleagues never get an opportunity to make remarks in future.
D.آپ بہتر طریقے سے فرض انجام دیتے ہیں تاکہ ساتھیوں کو کبھی مستقبل میں تنقید کرنے کا کوئی موقع نہ ملے.

138 मेहरानगड किल्ला कोणत्या राज्यामध्ये आहे?

In which state is the Mehrangarh Fort?

مہران گڑھ کا قلعہ کس صوبہ میں ہے :

A.राजस्थान
A.Rajasthan
A.راجستھان

B.गुजरात
B.Gujarat
B.گجرات

C.महाराष्ट्र
C.Maharashtra
C.مہاراشٹرا

D.यांपैकी कोणतेही नाही
D.None of these
D.انمیں سے کوئی نہیں

Answer:

A.राजस्थान
A.Rajasthan
A.راجستھان

139

सूचना: खालील प्रश्नात एक उघडलेला फासा दाखविला आहे आणि उत्तराचे पर्याय म्हणून चार पूर्ण फासे दाखविले आहेत. उघडलेला फासा परत बंद केल्यानंतर कुठचा फासा तयार होईल तो योग्य पर्याय निवडा.

DIRECTIONS: In question given below, an unfolded dice is given while four answer choices are given in the form of complete dices. Select the correct answer which is formed by folding the unfolded dice.

ہدایات: مندرجہ ذیل سوال میں، ایک کھلا ہوا ڈبہ دیا گیا ہے جبکہ 4 جواب کے اختیارات مکمل ڈبوں کے طور پر دئے گئے ہیں- 4 صحیح جواب منتخب کریں جس کو کھلے ہوئے ڈبوں کو جوڑ کر بنایا گیا ہے-

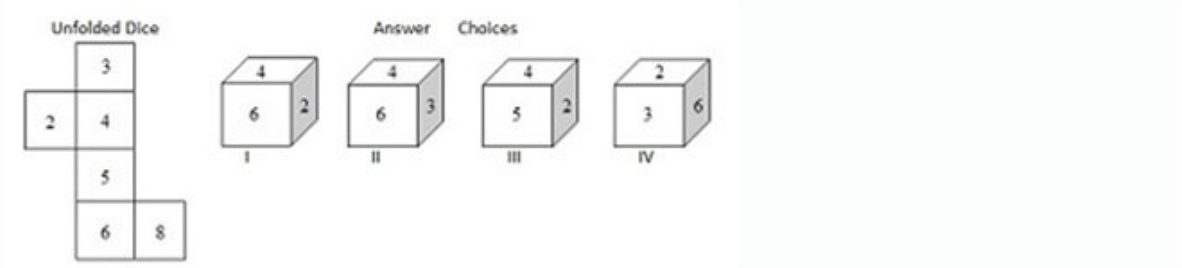

A. I

B. II

C. I & II

D. III

Answer: D. III

140

सूचना: खालील प्रश्नात उत्तरातील पर्यायांपैकी कोणत्या पर्यायी आकृतीत प्रश्नातील आकृती अंतर्भूत आहे?

DIRECTIONS: In the given question find the answer figure in which question figure is embedded.

ہدایات: دیئے گئے سوال میں سے اس جواب والی تصویر کو تلاش کریں جس میں سوال کی تصویر منسلک ہے۔

प्रश्न आकृती
Question Figure
سوال کی تصویر



(x)

उत्तरासाठी पर्यायी आकृत्या
Answer Figures
جواب کی تصاویر

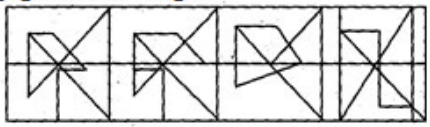

A B C D

A. (A)

B. (B)

C. (C)

D. (D)

Answer: D. (D)

141 आपला आवडता विद्यार्थी जर आपल्या सहकार्यावर अपमानस्पद टीका करत आहे, तर या वर तुमची प्रतिक्रिया काय असेल?

If your favorite student criticizes your colleague in an insulting language, what will be your reaction?

اگر آپ کے پسندیدہ طالب علم نے آپ کے ساتھی پر بری زبان میں تنقید کی ہے، تو آپ کا کیا ردعمل ہو گا؟

A.आपण त्या टीकांचा आनंद घेऊ आणि आगीत अजून इंधन ओतू
A.You enjoy the criticism and put more fuel to the fire
A.آپ تنقید سے لطف اندوز ہوتے ہیں اور آگ میں مزید ایندھن ڈالتے ہیں

B.आपण भविष्यात असे परत होऊ नये म्हणून विद्यार्थ्यांना याची चेतावणी देणार
B.You strictly warn the student not to repeat it in future
B.آپ سختی سے طالب علم کو خبردار کرتے ہیں کہ مستقبل میں دوبارہ ایسا نہ کرے

C.आपण या क्षणी कसेबसे ऐकून घेतले पण यापुढे कोणालाही यासाठी स्वातंत्र्य देणार नाही
C.You hear at that moment but not giving such liberty to anyone to next time
C.آپ اس وقت سنتے ہیں لیکن آئندہ کسی کو اس طرح کی آزادی نہیں دیتے

D.आपण आपल्या खाजगी आयुष्यात त्याला डोकावू देणार नाही
D.You never permit him to enter in your own private-world.
D.آپ اسے کبھی اپنی ذاتی نجی دنیا میں داخل ہونے کی اجازت نہیں دیتے.

Answer: B.आपण भविष्यात असे परत होऊ नये म्हणून विद्यार्थ्यांना याची चेतावणी देणार
B.You strictly warn the student not to repeat it in future
B.آپ سختی سے طالب علم کو خبردار کرتے ہیں کہ مستقبل میں دوبارہ ایسا نہ کرے

142	Out of the given options, choose the most appropriate one to fill in the blank. She _____from her chair to welcome us.
	A. rose
	B.have rise
	C.have rose
	D.has rise
Answer:	A. rose

143	65 पैसे हे रु. 1 चे किती टक्के आहेत? What percentage is 65 paise of Re1? 65پیسے 1 روپئے کا کتنا فیصد ہوگا۔
	A.55% A.55% A.55%
	B.60% B.60% B.60%
	C.65% C.65% C.65%

D.70%

D.70%

D.70%

Answer: C.65%

C.65%

C.65%

144 सूचना: खालील प्रश्नांमध्ये दिलेल्या पर्यायांमधून संबंधित अक्षर/शब्द/संख्या निवडा.

7584 : 5362 :: 4673 : ?

DIRECTIONS: In the following question, select the related letter/word/number from the given alternatives.

7584 : 5362 :: 4673 : ?

سمت: مندرجہ ذیل سوال میں، دیے گئے متبادل سے متعلقہ حرف/لفظ/نمبر منتخب کریں۔

7584 : 5362 :: 4673 : ?

A.2367
A.2367
A.2367

B.2451
B.2451
B.2451

C.2531
C.2531
C.2531

D.2485
D.2485
D.2485

Answer: B.2451
B.2451
B.2451

145	‘ गळ घालणे ‘ या वाक्प्रचाराचा अर्थ काय ?
	A.घात लावून बसणे
	B.मासे पकडणे
	C.आग्रह करणे
	D.मिठी मारणे
Answer:	C.आग्रह करणे

146 सूचना: अर्थपूर्ण परिच्छेद निर्माण करण्यासाठी, खाली दिलेली (P), (Q) (R), (S) आणि (T) ही पाच वाक्ये योग्य अनुक्रमाने पुनर्रचना करा; त्यांनतर खालील प्रश्नांची उत्तर द्या.

P. त्यामुळे एकमेकांशी लढून गिधाडांचे खाद्य बनण्यापेक्षा तडजोड करणे आणि मित्र असणे चांगले असे डुक्कर आणि सिंह दोघे ठरवतात.
Q. तो एक गरम उन्हाळाचा दिवस होता. पाणी पिण्यासाठी एका छोट्या तळ्याजवळ सिंह आणि डुक्कर येतात.
R. ते एकत्र पाणी पितात आणि त्यानंतर आपआपल्या मार्गाला निघून जातात.
S. लवकरच त्यांना कळते कि, गिधाडे त्यांच्यापैकी एक किंवा दोघेही खाली पडण्याची वाट पाहत आहेत, ती त्यांच्यासाठी मेजवानी होती.
T. कोण आधी पाणी पिणार यावरून वाद घालून आणि लढून झाल्यानंतर दम खाण्यासाठी ते थोडावेळ थांबले, तेव्हा त्यांच्या लक्षात आले कि त्यांच्यावर गिधाडे आहेत.

पुनर्रचना केल्यानंतर खालीलपैकी कोणते वाक्य पहिले असेल?

DIRECTION: Rearrange the following five sentences (P), (Q), (R), (S) and (T) in the proper sequence to form a meaningful paragraph; then answer the questions given below them.
P. The lion and the boar then decide that it was best to make up and be friends than fight and become food for vultures.
Q. It was a hot summer day. A lion and a boar reach a small water body for a drink.
R. They drink the water together and go their ways after.
S. Soon they realize that the vultures are waiting for one or both of them to fall, to feast on them.
T. After arguing and fighting about who should drink first, they get tired and stop for breath, when they notice vultures above.

Which of the following should be the FIRST sentence after rearrangement?

ہدایات: ان پانچ جملوں (P)، (Q)، (R)، (S) اور (T) کو با معنی پیرا بنانے کے لئے دوبارہ ترتیب دیجئے، پھر نیچے دے گئے سوالوں کے جواب دیجئے

P. شیر اور سور نے فیصلہ کیا کہ لاڈیی کرنے اور گدد کہ خانہ بننے سے اچھا ہے کہ ہم صلح کرے اور اچھے دوست بنے.
Q. ایک گرمی کا دن تھا. سور اور شیر پانی پینے پہنچے.
R. انہونے ساتھ میں پانی پیا اور اپنے اپنے راستے پی نکل گئے.
S. جلدی انھ احساس ہوا کہ گدد انمی سے ایک یا دونوں کہ انتظار کر رہا ہے تاکی وو انکا شکار کر سکھ.
T. بہر کرنے اور لاڈیی کرنے کے بعد جب وو تھک گئے اور سان لینے کے لئے بیٹھ گئے، جب انہونے دیکھا کہ گدد انکے اپر بیٹھا تھا.

دوبارہ ترییب دینے کے بعد کون سا جملہ پہلے ہونا چاہیے؟

A.Q
A.Q
A.Q

B.R
B.R
B.R

C.S
C.S
C.S

D.T
D.T
D.T

Answer: A.Q
A.Q
A.Q

147 सूचना: दिलेल्या पर्यायांमधून वेगळे ते निवडा.

DIRECTIONS: Choose the odd one out from the given alternatives.

سمت: دیے گئے متبادل میں سے بے جوڑ کو چنیں۔

A.बर्फ
A.Ice
A.برف

B.केक
B.Cake
B.کیک۔

C.पेस्ट्री
C.Pastry
C.پیسٹری۔

D.बिस्कीट
D.Biscuit
D.بسکٹ۔

Answer: A.बर्फ
A.Ice
A.برف

148 Out of the given options, choose the one which is the correct indirect speech of the sentence given below.
Peter said to David “How often do you go to the theatre?”

A.Peter asked David how often he go to the theatre.

B.Peter asked David how often did he went to the theatre.

C.Peter asked David how often he went to the theatre.

D.Peter asks David how often he was going to the theatre.

Answer: C.Peter asked David how often he went to the theatre.

149 $144x^2 - 16 = 9$ या वर्गसमीकरणाची मुळे आहेत:

The roots of the quadratic equation $144x^2 - 16 = 9$ are:

$144x^2 - 16 = 9$ مربع مساوات کے روٹ ہیں:

(A) $+\frac{4}{13}, -\frac{4}{13}$

(B) $+\frac{8}{13}, -\frac{8}{13}$

(C) $+\frac{5}{4}, -\frac{5}{4}$

(D) $+\frac{5}{12}, -\frac{5}{12}$

Answer: (D) $+\frac{5}{12}, -\frac{5}{12}$

150 कोणतेही उघड कारण नसतांना दीर्घकाळाची चिंता आणि धास्तीच्या भावनेला म्हणतात

Prolonged feeling of an anxiousness and apprehension without any apparent cause is called as

کسی بھی واضح وجہ کے بغیر خطرناک اور کشیدگی کی طویل احساس کے طور پر کہا جاتا ہے

A.मानसिक ताण
A.Strain
A.کشیدگی

B.ताण
B.Stress
B.کشیدگی

C.न्युरोटिक एक्साईटी
C.Neurotic anxiety
C.نیروٹک پریشانی

D.अस्तीत्वसंबंधी चिंता
D.Existential anxiety
D.غیر معمولی تشویش

Answer: C.न्युरोटिक एक्साईटी
C.Neurotic anxiety
C.نیروٹک پریشانی

151 अनुरूपतेवर आद्य प्रयोग यांच्याद्वारे करण्यात आला

Pioneering experiment on conformity was carried by

روایات کی تقلید کا قائدانہ تجربے _____کے ذریعہ کیے گئے۔

A.केलमॅन
A.Kelman
A.کلمان

B.शेरीफ
B.Sheriff
B.شریف

C.कोलमॅन
C.Cohlman
C.کولمان

D.डकमॅन
D.Duckman
D.ڈُکمان

Answer: B.शेरीफ
B.Sheriff
B.شریف

152 निर्देश: मालिका पूर्ण करा

EZ, ?, IV, KT

DIRECTION: Complete the series

EZ, ?, IV, KT

ہدایت اس سرج کو مکمّل کرو

EZ, ?, IV, KT

A.HX
A.HX
A.HX

B.GX
B.GX
B.GX

C.FX
C.FX
C.FX

D.XF
D.XF
D.XF

Answer: B.GX
B.GX
B.GX

153 'T' म्हणजे (×), U म्हणजे (-), 'X' म्हणजे (÷) आणि W म्हणजे (+), तर पुढील अभिव्यक्तीचे मूल्य काय असेल?

'T' means (×), U means (-), 'X' means (÷) and W means(+), then what will be the value of the following expression.

'T' مطلب (x)، U مطلب (-)، 'X' مطلب (÷) اور W مطلب (+)، تو نیچے لکھے ہوئے اظہارات کا کیا ویلیو ہوگا؟

(50 X 2) W (28 X 4)

A. 42

B. 58

C. 32

D. 63

Answer: C. 32

154 वर्तुळाची सर्वांत लांब जीवा असते:

The longest chord of a circle is:

ایک دائرے کا سب سے طویل کورڈ یہ ہے:

A.स्पर्शिका
A.tangent
A.tangent ٹینجینٹ

	B.त्रिज्या B.Radius B.Radius نصف قطر
	C.परीघ C.circumference C.circumference سرکم فیرینس
	D.व्यास D.diameter D.diameter قطر
Answer:	D.व्यास D.diameter D.diameter قطر
155	$\sqrt{1.44}$ चे मूल्य आहे: The value of $\sqrt{1.44}$ is: $\sqrt{1.44}$ کی قدر ہے:
	A. 0.3
	B. 0.03
	C. 1.2
	D. 0.94
Answer:	C. 1.2
156	निर्देश: खालीदिलेल्या अक्षराच्या क्रमात काही अक्षरे गहाळ केली आहेत ते त्या क्रमाने खाली दिलेल्या पर्यायांपैकी एक आहे b _ c _ cba _ c _ bacc _ ba _ cc DIRECTIONS: In each of the following letter series, same of the letters are missing which are given in that order as one of the alternatives below it. b _ c _ cba _ c _ bacc _ ba _ cc دایت جیل کے حرف سرج میں کوئی حرف گمشدہ ہے آپکو انکی شناخت جیل کے اختیارات سے کرنی ہے b _ c _ cba _ c _ bacc _ ba _ cc

A.acaccc
A.acaccc
A.acaccc

B.acacab
B.acacab
B.acacab

C.abcabc
C.abcabc
C.abcabc

D.ababab
D.ababab
D.ababab

Answer: D.ababab
D.ababab
D.ababab

157 एक खगोलशास्त्रीय एकक यातील सरासरी अंतर आहे:

One astronomical unit is the average distance between:

ایک فلکیاتی یونٹ _____ کے بیچ کی اوسط دوری ہوتی ہے۔

A.पृथ्वी आणि सुर्य
A.Earth and the sun
A.زمین اور سورج

B.पृथ्वी आणि चंद्र
B.Earth and the Moon
B.زمین اور چاند

C.गुरू आणि सुर्य
C.Jupiter and the sun
C.جوپیٹر اورسورج

D.प्लुटो आणि सुर्य
D.Pluto and the sun
D.پلوٹو اور سورج

Answer: A.पृथ्वी आणि सुर्य
A.Earth and the sun
A.زمین اور سورج

158

सरळ रूप द्या:
999 – 432 = ?

Simplify:
999 – 432 = ?

آسان بنائیں:
999 – 432 = ?

A.467
A.467
A.467

B.538
B.538
B.538

C.567
C.567
C.567

D.632
D.632
D.632

Answer:

C.567
C.567
C.567

159

सूचना: खालील प्रश्नात उत्तरातील पर्यायांपैकी कोणत्या पर्यायी आकृतीत प्रश्नातील आकृती अंतर्भूत आहे?

DIRECTIONS: In the given question find the answer figure in which question figure is embedded.

ہدایات: دیئے گئے سوال میں سے اس جواب والی تصویر کو تلاش کریں جس میں سوال کی تصویر منسلک ہے۔

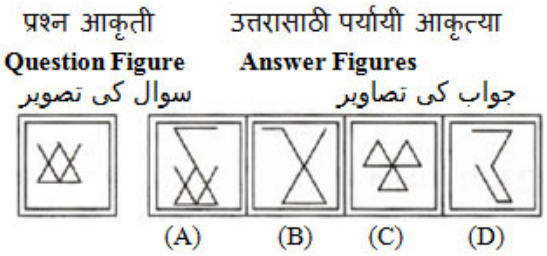

A. (A)

B. (B)

C. (C)

D. (D)

Answer: A. (A)

160 खालीलपैकी कोणते उभयचर आहेत?

Which of the following is an amphibian?

مندرجہ ذیل میں سے Amphibian کون ہے؟

A.मनुष्य
A.Man
A. آدمی

B.सरडा
B.Salamander
B. سمندر

C.हत्ती
C.Elephant
C. ہاتھی

D.पक्षी
D.Bird
D. برڈ

Answer: B.सरडा
B.Salamander
B. سمندر

161 A sentence with an underlined idiomatic expression is given. What is the meaning of the idiomatic expression ‘jack of all trades’ in the sentence given below?
John can do plumbing, carpentry, and roofing—a real jack of all trades.

A.Someone who can do several different jobs instead of specializing in one

B.Someone who is an expert only in one thing and fails to do any other thing

C.Someone who is a rich businessman

D.None of the above

Answer: A.Someone who can do several different jobs instead of specializing in one

162	अध्यापन अध्ययन प्रक्रिया मुलभूत रीतीने येथे पूर्ण होते Teaching learning process fundamentally is completed in سیکھنے کے عمل کی تعلیم بنیادی طور پر مکمل ہوتی ہے
	A.वर्ग A.classroom A.درسگاہ
	B.शाळा B.school B.اسکول
	C.समाज C.society C.سماج
	D.घर D.home D.گھر
Answer:	A.वर्ग A.classroom A.درسگاہ

163 **सूचना:** खालील प्रश्नात, दिलेल्या पर्यायांमधून नातेसंबंध सांगणारी आकृती निवडा.

DIRECTIONS: In the question below, select the related figure from the given alternatives.

ہدایات: ذیل کے سوال میں، دئے گئے متبادلات میں سے متعلقہ تصویر منتخب کریں۔

Problem Figures:

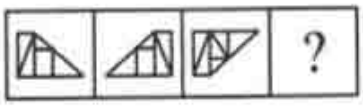

(A) (B) (C) (D)

Answer Figures:

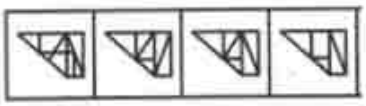

(1) (2) (3) (4)

A. 1

B. 2

C. 3

D. 4

Answer: C. 3

164 स्वमग्नता असलेले मुल सुमारे _____% मानसिकदृष्ट्या मंद असतात.

About _____% of children with autism are also mentally retarded

خود تسکینی سے متاثر تقریبا _____ فیصد بچے ، دماغی کمی کا بھی شکار ہوتے ہیں۔

A.90
A.90
A.90

B.70
B.70
B.70

C.100
C.100
C.100

D.25
D.25
D.25

Answer: B.70
B.70
B.70

165

सूचना: खालील प्रश्नातील चार पर्यायांपैकी, तीन पर्याय असे आहेत की प्रत्येकातील 3 शब्द एकमेकांशी (A), (B), (C), (D) आणि (E) अशा दिलेल्या 5 पर्यायांपैकी कोणत्याही एका दृष्टीने एकमेकांशी संबंधित आहेत. आणि संबंध दर्शविणारा 1 पर्याय आहे जो खालील आकृतींद्वारा दाखविलेला नाही. हया अटीची पूर्तता करणारा संबंध म्हणजे तुमचे उत्तर असेल.

DIRECTION: Out of the four alternatives in the following question, three alternatives are such that the three words in each are related among themselves in one of the five ways represented by (A), (B), (C), (D) and (E) below. And one of the alternatives represents a relationship which is not represented by any of the figures given below. The relationship that complies this condition is your answer.

ہدایت: مندرجہ ذیل سوال میں چار متبادل میں سے، تین متبادل ایسے ہیں کہ ہر ایک میں تین الفاظ آپس میں پانچ طریقوں (A)،(B)،(C)،(D)&(E) کے ذریعہ کی گئی ہے۔ اور ایک متبادل میں سے ایک میں متعلق ہیں جن کی نمائندی مندرجہ ذیل ایسے تعلق کی نمائندگی کرتا ہے جس کی نمائندگی بچے دیے گئے کسی بھی خاکے کے ذریعہ نہیں کی جاتی ہے۔ اس شرط پر پورا اترنے والی شرط آپ کا جواب ہے۔

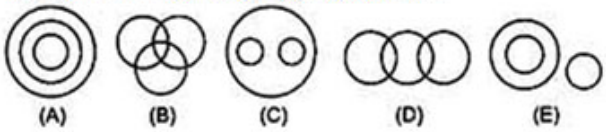

(a) Hen, Dog, Cat / कोंबडी, कुत्रा, मांजर/مرغی، کتا، بلی

(b) Body, Ear, Mouth / शरीर, कान, तोंड/جسم، کان، منہ

(c) Bed, Ward, Nurse / पलंग, प्रभाग, नर्स/بستر، وارڈ، نرس

(d) Tiger, Animal, Carnivorous / वाघ, प्राणी, मांसाहारी/شیر، جانور، گوشت خور

A. (A)

B. (B)

C. (C)

D. (D)

Answer: A. (A)

166 विशिष्ट व्याज दराने 8 वर्षांमध्ये एक रक्कम तिच्या 7/5 पट होते. व्याज दर काढा?

A sum of money becomes 7/5 of itself in 8 years at certain rate of interest. Find the rate:

ایک مخصوص در کی سود پر 8 سال میں ایک مبلغ رقم اپنے کی 7/5 ہوجاتی ہے۔ در معلوم کریں:

A.5%
A.5%
A.5%

B.1/2%
B.1/2%
B.1/2%

C.8%
C.8%
C.8%

D.12%
D.12%
D.12%

Answer: A.5%
A.5%
A.5%

167 ‘संरक्षण या विनाश’ या पुस्तकाचे लेखक आहेत

The author of the book ‘Sanrakshan Ya Vinash’ is

سنرکشن یا وناش کتاب کے مصنف ہیں

A.सरला देवी
A.Sarala Devi
A.سرلا دیوی

B.वंदना शिवा
B.Vandana Shiva
B.وندنا شیوا

C.जीम कॉरबेट
C.Jim Corbett
C.جم کاربیٹ

D.रस्किन बॉन्ड
D.Ruskin Bond
D.رسکن بونڈ

Answer: A.सरला देवी
A.Sarala Devi
A.سرلا دیوی

168 जेव्हा आपल्या महिला सहकारी शैक्षणिक उपक्रमात आपला पुरेपूर वापर करून घेतात मग तुमचे निर्णय खालील प्रमाणे असते-

When your female colleague takes extra advantage of you in academic pursuits then you take the following decision—

جب آپ کی خواتین ساتھی تعلیمی تدابیر میں آپ کا اضافی فائدہ اٹھائیں تو آپ مندرجہ ذیل فیصلے لیتے ہیں-

A.ताबडतोब आपण स्वत:ला तिच्या पासून दूर करणार
A.Immediately restrict yourself from her company
A.فوری طور پر اپنے آپ کو ان کی معیت سے دور کرنا

B.तिला भविष्यात संधी देणार नाही
B.Never give her opportunity in future
B.مستقبل میں اس کو کبھی ایسا موقع نہ دینا

C.तिच्यावर टीका करणार
C.Criticize her
C.اس پر تنقید

D.तिला शोषणाच्या जाळ्यात अडकू देणार.
D.Try to escape from her dragnet of exploitation.
D.استحصال کے تسلسل سے اس کو بچانے کی کوشش کرنا.

Answer: D.तिला शोषणाच्या जाळ्यात अडकू देणार.
D.Try to escape from her dragnet of exploitation.
D.استحصال کے تسلسل سے اس کو بچانے کی کوشش کرنا.

169 सूचना: अर्थपूर्ण परिच्छेद निर्माण करण्यासाठी, खाली दिलेली (P), (Q) (R), (S) आणि (T) ही पाच वाक्ये योग्य अनुक्रमाने पुनर्रचना करा; त्यांनतर खालील प्रश्नांची उत्तर द्या.

P. त्यामुळे एकमेकांशी लढून गिधाडांचे खाद्य बनण्यापेक्षा तडजोड करणे आणि मित्र असणे चांगले असे डुक्कर आणि सिंह दोघे ठरवतात.
Q. तो एक गरम उन्हाळाचा दिवस होता. पाणी पिण्यासाठी एका छोट्या तळ्याजवळ सिंह आणि डुक्कर येतात.
R. ते एकत्र पाणी पितात आणि त्यानंतर आपआपल्या मार्गाला निघून जातात.
S. लवकरच त्यांना कळते कि, गिधाडे त्यांच्यापैकी एक किंवा दोघेही खाली पडण्याची वाट पाहत आहेत, ती त्यांच्यासाठी मेजवानी होती.
T. कोण आधी पाणी पिणार यावरून वाद घालून आणि लढून झाल्यानंतर दम खाण्यासाठी ते थोडावेळ थांबले, तेव्हा त्यांच्या लक्षात आले कि त्यांच्यावर गिधाडे आहेत.

पुनर्रचना केल्यानंतर खालीलपैकी कोणते वाक्य पाचवे असेल?

DIRECTION: Rearrange the following five sentences (P), (Q), (R), (S) and (T) in the proper sequence to form a meaningful paragraph; then answer the questions given below them.
P. The lion and the boar then decide that it was best to make up and be friends than fight and become food for vultures.
Q. It was a hot summer day. A lion and a boar reach a small water body for a drink.
R. They drink the water together and go their ways after.
S. Soon they realize that the vultures are waiting for one or both of them to fall, to feast on them.
T. After arguing and fighting about who should drink first, they get tired and stop for breath, when they notice vultures above.

Which of the following should be the FIFTH sentence after rearrangement?

ہدایات: ان پانچ جملوں (P)، (Q)، (R)، (S) اور (T) کو با معنی پیرا بنانے کے لئے دوبارہ ترتیب دیجئے، پھر نیچے دے گئے سوالوں کے جواب دیجئے

P. شیر اور سور نے فیصلہ کیا کہ لاڈیی کرنے اور گدد کہ خانہ بننے سے اچھا ہے کہ ہم صلح کرے اور اچھے دوست بنے.
Q. ایک گرمی کا دن تھا. سور اور شیر پانی پینے پہنچے.
R. انہونے ساتھ میں پانی پیا اور اپنے اپنے راستے پی نکل گئے.
S. جلدی انھ احساس ہوا کہ گدد انمی سے ایک یا دونوں کہ انتظار کر رہا ہے تاکی وو انکا شکار کر سکھ.
T. بہر کرنے اور لاڈیی کرنے کے بعد جب وو تھک گئے اور سان لینے کے لئے بیٹھ گئے، جب انہونے دیکھا کہ گدد انکے اپر بیٹھا تھا.

دوبارہ ترییب دینے کے بعد کون سا جملہ پانچوہ ہونا چاہیے؟

A.R
A.R
A.R

B.P
B.P
B.P

C.Q
C.Q
C.Q

D.T
D.T
D.T

Answer: A.R
A.R
A.R

170 खालीलपैकी सर्वांत लहान अपूर्णांक शोधा

Find the smallest of the following fractions

مندرجہ ذیل کسور میں سے سب سے چھوٹی کسر تلاش کریں

A.85/48
A.85/48
A.85/48

B.135/123
B.135/123
B.135/123

C.23/15
C.23/15
C.23/15

D.812/795
D.812/795
D.812/795

Answer: D.812/795
D.812/795
D.812/795

171 ‘ काल मी सातारी पेढे खाल्ले.’ या वाक्यातील विशेषण ओळखा.

A.काल

B.मी

C.सातारी

D.पेढे

Answer: C.सातारी

172 तांदुळाच्या भूश्यामध्ये असलेल्या या नैसर्गिक घटकामुळे वाळवी प्रतिकारक बनते-

This naturally occurring element in the rice husk makes it termite resistant -

چاول کی بھوسی میں قدرتی طور پر واقع عنصر جو دیمک مزاحم ہوتا ہے -

A.सिलिकॉन
A.Silicon
A. سلیکن

B.फॉसफेट
B.Phosphate
B. فاسفیٹ

C.नाईट्रेट्स
C.Nitrates
C. نائٹریٹس

D.फ्लोराईड
D.Fluoride
D. فلورائیڈ

Answer: A.सिलिकॉन
A.Silicon
A. سلیکن

173 सूचना: प्रत्येक प्रश्नाला एक प्रमुख विधानासोबत चार विधाने आहेत ज्यांच्याखाली A, B, C आणि D असे चार विधान आहेत. क्रमवार विधानांची जोडी निवडा ज्यामध्ये प्रथम विधान दुसऱ्या विधानाला सुचवते, आणि दोन्ही विधाने तर्किकदृष्ट्या प्रमुख विधानासोबत निगडित असेल.

जर मला आमंत्रण मिळाले, तर मी या कार्याला उपस्थित राहू शकेन
A. मला आमंत्रण मिळाले
B. मला आमंत्रण प्राप्त झाले नाही
C. मी कार्यक्रमाला उपस्थित होतो
D. मी कार्यक्रमाला उपस्थित नव्हतो

DIRECTIONS: Each question has a main statement followed by four statements labelled A, B, C and D. Choose the ordered pair of statements, where the first statement implies the second, and the two statements are logically consistent with the main statement.

If I receive the invitation, I will attend the function
A. I received the invitation
B. I did not receive the invitation
C. I attended the function
D. I did not attend the function

ہدایت: ہر سوال میں ایک جملہ ہے جسکے بعد چار جملےاے، بی،سی اور ڈی کے نام سے دئے گئے ہیں اسمیں منسلک جوڑیوں کو چنئے۔ جہاں پہلا جملہ دوسرے جملہ کی اور اشارہ کر رہا ہے اور دو جملے منطقی مرکزی بیان کے مطابق ہیں

اگر مجھے دعوت ملی تو میں فنکشن میں جاؤں گا
Aمجھے دعوت ملی ۔
Bمجھے دعوت نہیں ملی ۔
Cمیں فنکشن میں گیا ۔
Dمیں فنکشن میں نہیں گیا ۔

A.AC
A.AC
A.AC

B.BC
B.BC
B.BC

C.DA
C.DA
C.DA

D.CD
D.CD
D.CD

Answer: A.AC
A.AC
A.AC

174 सूचना: खाली दिलेल्या प्रश्नांमध्ये प्रत्येकी तीन विधानांचे चार गट आहेत. प्रत्येक समूहातील विधाने काळजीपूर्वक वाचा आणि तिसरे विधान तर्कशुद्धपणे पहिल्या दोन विधानांचे अनुसरण करणारा(रे) गट ओळखा.
(a) काही जर्नल्स मासिके असतात. काही मासिके नियतकालिके असतात. काही जर्नल्स नियतकालिके असतात.
(b) काही भय भूत असतात. All ghosts are faints. काही भय कमजोर असतात.
(c) सर्व शास्त्रज्ञ संशोधक असतात. सर्व संशोधक प्रोफेसर असतात. काही प्रोफेसर शास्त्रज्ञ असतात.
(d) अनेक बॅगा सामान असतात. सर्व सामान पॅकेजेस असतात. काही पॅकेजेस बॅगा नसतात.

DIRECTION: The questions given below have four groups of three statements each. Read the statements in each group carefully and identify the group/groups where the third statement logically follows the first two statements in the group.

(a) Some journals are magazines. Some magazines are periodic. Some journals are periodic.
(b) Some horror is ghost. All ghosts are faints. Some horror are faints.
(c) All scientists are researchers. All researchers are professors. Some professors are scientists.
(d) Many baggages are luggages. All luggages are packages. Some packages are not baggages.

ہدایت: ذیل میں دیے گئے سوالات کے تین بیانات میں سے ہر ایک کے چار گروپ ہیں۔ ہر گروپ میں بیانات کو دھیان سے پڑھیں اور اس گروپ/گروپس کی شناخت کریں جہاں تیسرا بیان منطقی طور پر گروپ میں پہلے دو بیانات کی پیروی کرتا ہو۔

(a) کچھ جرنل میگزین ہیں۔ کچھ میگزین میعادی ہیں۔ کچھ جرنل میعادی ہیں۔
(b) کچھ دہشت بھوت ہے۔ سبھی بھوت بزدل ہیں۔ کچھ دہشت بزدل ہیں۔
(c) سبھی سائنس دان تحقیق کار ہیں۔ سبھی تحقیق کار پروفیسر ہیں۔ کچھ پروفیسر سائنس دان ہیں۔
(d) بہت سے اسباب سامان ہیں۔ سبھی سامان پیکیج ہیں۔ کچھ پیکیج اسباب نہیں ہیں۔

A.केवळ b, c, आणि d
A.Only b, c and d
A.صرف c، b اور d

B.केवळ b आणि c
B.Only b and c
B.صرف b اور c

C.केवळ a आणि d
C.Only a and d
C.صرف a اور d

D.केवळ b
D.Only b
D.صرف b

Answer: B.केवळ b आणि c
B.Only b and c
B.صرف b اور c

175 विधान:
एक सरकारी अधिकारी लाच घेताना पकडला गेला. जनतेने स्वत: च्याच हाती घेतली व अधिकारी कार्यालय दडवले.

कृतीचा कोर्स:
I. सरकारी अधिकार्याला पुरस्कृत केले पाहिजे
II. पलायन करण्यामध्ये गुंतलेल्या व्यक्तींना बक्षीस दिले पाहिजे.

Statement:
A government officer was caught taking bribes. The public took matter into their own hands and ransacked the officer's office.

Course of actions:
I. Government officer should be rewarded.
II. Persons involved in the ransacking should be rewarded

بیان:
ایک سرکاری افسر رشوت لیتے ہوئے پکڑا گیا۔ عوام نے معاملہ اپنے ہاتھ میں لے لیا اور افسر کے دفتر کی مکمل تلاشی لی۔

لائحہ عمل:
I۔سرکاری افسر کو انعام دیا جانا چاہیے
II۔ تلاشی میں ملوث افراد کو انعام دیا جانا چاہیے ۔

A.फक्त I अनुसरून आहे
A.Only I follows
A. صرف I لاگو ہو گا۔

B.फक्त II अनुसरण करते आहे
B.Only II follows
B. صرف II لاگو ہو گا۔

C.एकतर I किंवा II अनुसरून आहे
C.Either I or II follows
C. I یا II میں سے ایک لاگو ہو گا۔

D.I किंवा II दोन्हीपैकी काहीही अनुसरण करत नाही
D.Neither I nor II follows
D. I اور II میں سے کوئی بھی لاگو نہیں ہو گا۔

Answer: D.I किंवा II दोन्हीपैकी काहीही अनुसरण करत नाही
D.Neither I nor II follows
D. I اور II میں سے کوئی بھی لاگو نہیں ہو گا۔

176 जन्मापूर्वीच्या विकासाच्या _____ टप्प्यात एका जीवास अपाय होण्याचा धोका सर्वाधिक असतो

At ____ stage of prenatal development an organism is most of vulnerable to injury

والدین کے ڈولپمینٹ_____ مرحلہ پر ایک آرگنزم کوچوٹ کا بہت خطرہ ہوتا ہے

A.बीजरूप टप्पा
A.Germinal stage
A.تیتی خلیہ کا مرحلہ

B.गर्भ
B.Fetal stage
B.جنینی مرحلہ

C.गर्भाची प्रारंभिक अवस्था
C.Embryonic stage
C.لوتھڑا اسقاط مرحلہ

D.A व B दोन्ही
D.A & B both
D.A اور B دونوں

Answer: C.गर्भाची प्रारंभिक अवस्था
C.Embryonic stage
C.لوتھڑا اسقاط مرحلہ

177 सूचना: दिलेल्या पर्यायांमधून वेगळे ते निवडा.

DIRECTIONS: Choose the odd one out from the given alternatives.

سمت: دیے گئے متبادل میں سے بے جوڑ کو چنیں۔

A.लोकर
A.Wool
A.اون

B.पीस
B.Feather
B.پنکھ

C.रेशीम
C.Silk
C.ریشم

D.गवत
D.Grass
D.گھاس

Answer: D.गवत
D.Grass
D.گھاس

178 जर एखादा विद्यार्थी आपल्याला पूर्व कल्पना न देता काही समस्या घेऊन आपल्या घरी आपल्याला भेटायला आला असेल, तर आपण-

If a student visits your home without prior permission with some problem, you will—

اگر کوئی طالب علم کسی بھی مسئلے پیشگی اجازت کے بغیر آپ کے گھرآتا ہے توآپ—

A.कठोर पद्धतीत प्रतिक्रिया देणार
A.React in a harsh manner
A.ایک سخت انداز میں جواب دیں

B.त्याच्या समस्येचे उत्तर मिळेल असे उपाय सांगणार
B.Tell the way to get the solution
B.حل حاصل کرنے کا طریقہ بتائیں

C.त्या समस्येकडे लक्ष देणार नाही
C.Not give a take notice to the incident
C.واقعے کو نوٹس نہیں کرتے

D.अपघात टाळण्यासाठी तसे करू नका असे सांगणार
D.Ask them not to do it to avoid accident,
D.ان کو بتائیں کہ حادثہ سے بچنے کے لئے یہ نہیں کرنا،

Answer: B.त्याच्या समस्येचे उत्तर मिळेल असे उपाय सांगणार
B.Tell the way to get the solution
B.حل حاصل کرنے کا طریقہ بتائیں

179 बगदाद ही _____ ची राजधानी आहे –

Baghdad is the capital of -

بغداد راجدھانی ہے :

A.इराण
A.Iran
A.ایران کی

B.इराक
B.Iraq
B.عراق کی

C.जॉर्डन
C.Jordan
C.جارڈن کی

D.यांपैकी कोणतेही नाही
D.None of these
D.انمیں سے کوئی نہیں

Answer: B.इराक
B.Iraq
B.عراق کی

180 A हा B पेक्षा दुप्पट चांगला कामगार आहे. एकत्रितरित्या ते एक काम 14 दिवसांत पूर्ण करतात. A ला ते काम एकटे पूर्ण करण्यास किती दिवस लागतील?

A is twice as good workman as B. Together they finish a piece of work in 14 days. In how many days can A alone do it?

A دوگنا اچھا ہے مزدور B ۔ دونوں مل کر ایک کام 14 دن میں ختم کرتے ہیں ۔ A سے۔ اکیلے اس کام کو کتنے دن میں مکمل کر سکتا ہے؟

A.19 दिवस
A.19 days
A.19دن

B.15 दिवस
B.15 days
B.15دن

C.21 दिवस
C.21 days
C.21دن

D.14 दिवस
D.14 days
D.14دن

Answer: C.21 दिवस
C.21 days
C.21دن

181 ‘आनंद मठ’ यांची प्रसिध्द कादंबरी होती –

‘Avand Math’ was a famous novel by -

مشہور ناول آنند مٹھ کے مصنف ہیں :

A.ईश्वर चंद्र विद्यासागर
A.Ishwar Chandra Vidyasagar
A.ایشور چندر ودیا ساگار

B.बंकिम चंद्र चटोपाध्याय
B.Bankim Chandra Chattopadhyay
B.بنکم چندر چٹوپادھیای

C.रवींद्रनाथ टागोर
C.Rabindranath Tagore
C.ربیندرناتھ ٹیگور

D.शरत चंद्र चटोपाध्याय
D.Sarat Chandra Chattopadhyay
D.سرت چندر چٹوپادھیای

Answer: B.बंकिम चंद्र चटोपाध्याय
B.Bankim Chandra Chattopadhyay
B.بنکم چندر چٹوپادھیای

182 जर $x^{a3} .x^{b3} .x^{3ab(a+b)} = (2^5)^{25}$ आणि $a + b = 5$ तर x काढा:

Solve for x if $x^{a^3} .x^{b^3} .x^{3ab(a+b)} = (2^5)^{25}$ and, $a+b=5$:

اگر $a+b=5$,اور $x^{a^3} .x^{b^3} .x^{3ab(a+b)} = (2^5)^{25}$:تو x کے لئے حل کریں۔

A. 2

B. 3

C. 1

D. 0

Answer: A. 2

183 समांतरभुजाच्या कणरिषा या अनुक्रमे 8 मी आणि 6 मी आहेत. जर एक बाजू 5 सेंमी असेल तर समांतरभुजाचे क्षेत्रफळ काय आहे:

Diagonals of a parallelogram are 8 m and 6 m respectively. If one of the side is 5m, then the area of parallelogram is:

ایک متوازی الاضلاع کا قطربالترتیب 8میٹر اور 6 میٹر ہے. اگر ایک طرف 5 میٹر ہے تو، متوازی الاضلاع کا علاقہ یہ ہے:

A.18 मी^{2}
A.18 m^2
A.18 مربع میٹر

B.30 मी^{2}
B.30 m^2
B.30 مربع میٹر

C.24 मी^{2}
C.24 m^2
C.24 مربع میٹر

D.48 मी^{2}
D.48 m^2
D.48 مربع میٹر

Answer: C.24 मी^{2}
C.24 m^2
C.24 مربع میٹر

184 सूचना: दिलेली माहिती काळजीपूर्वक वाचा आणि खालील प्रश्नांची उत्तरे द्या.
सहा मित्र P, Q, R, S, T आणि U वेगवेगळ्या कंपन्यांत काम करतात, जसे - गुगल, ऑरेकल, प्रोमेट्रिक, ऍपल, फेसबुक आणि टाटा आणि प्रत्येकजण कंपनी प्रायोजित वेगवेगळ्या रंगाचे शर्ट घालतात, उदा. पांढरा, काळा, शेंदरी, पिवळा, हिरवा आणि करडा पण हे त्याच क्रमाने असतील असे नाही.
I. ज्याने पांढरा शर्ट घातला आहे तो ऍपलमध्ये काम करतो आणि ज्याने काळा शर्ट घातला आहे तो गुगल मध्ये काम करतो.
II. U हा प्रोमेट्रिक किंवा फेसबुकमध्ये काम करत नाही.
III. P हा शेंदरी रंगाचा शर्ट वापरतो आणि ऑरेकल मध्ये काम करतो.
IV. S फेसबुकमध्ये काम करीत नाही आणि प्रोमेट्रिक हिरव्या रंगाच्या शर्टाला प्रायोजित केलेले नाही.
V. T टाटामध्ये काम करतो आणि S किंवा N दोघेही ऍपल मध्ये काम करत नाही.
VI. फेसबुक हिरव्या किंवा पिवळ्या रंगाचे शर्ट प्रायोजित करत नाहीत आणि R गुगल मध्ये काम करतो.
खालीलपैकी काय सत्य आहे?

DIRECTIONS: Read the following information carefully and answer the questions that follow.
Six friends P,Q,R,S,T and U works in different companies namely— Google, Oracle, Prometric, Apple, Facebook and Tata and each wears different coloured company- sponsored shirts, viz., White, Black, Orange, Yellow, Green and Grey though not necessarily in the same order.
I. The one wearing the white shirt works in Apple and the one wearing the black shirt works in Google.
II. U does not work in Prometric or Facebook.
III. P wears orange shirt and works in Oracle.
IV. S does not work in Facebook and green coloured shirt is not sponsored by Prometric.
V. T works in Tata, and neither S nor Q works in Apple.
VI. Facebook does not sponsor green or yellow coloured shirts and R works in Goole.
Which of the following is true?

ہدایات: مندرجہ ذیل معلومات کو دھیان سے پڑھیں اور نیچے دیے گئے سوالوں کے جواب دیں۔
مختلف کمپنیوں میں کام کرتے ہیں جن کے نام ہیں – گوگل، اوریکل، پرومیٹرک، ایپل، فیسبک، اور ٹاٹا U اور T، S، R، Q، P چھ دوست اور ہر ایک مختلف رنگ کی کمپنی کی اسپانسر کی ہوئی شرٹ پہنتا ہے جیسے سفید، کالی، نارنگی، پیلی، ہری اور بھوری اگرچہ لازمی طور پر یکساں ترتیب میں نہیں۔
I۔ سفید شرٹ پہننے والا ایپل میں کام کرتا ہے اور کالی شرٹ پہننے والا گوگل میں کام کرتا ہے۔
II- U پرومیٹرک یا فیسبک میں کام نہیں کرتا ہے۔
III- P نارنگی شرٹ پہنتا ہے اور اوریکل میں کام کرتا ہے۔
IV- S فیسبک میں کام نہیں کرتا ہے اور ہرے رنگ کی شرٹ پرومیٹرک کے ذریعہ اسپانسر کی ہوئی نہیں ہے۔
V- T ٹاٹا میں کام کرتا ہے، اور نہ تو Q نہ ہی S ایپل میں کام کرتا ہے۔
VI گوگل میں کام کرتا ہے۔ R ۔ فیسبک ہرے یا پیلی رنگ کی شرٹ اسپانسر نہیں کرتا ہے اور
مندرجہ ذیل میں سے کون درست ہے؟

A.टाटा काळे शर्ट प्रायोजित करते
A.Tata sponsors black shirts
A.ٹاٹا کالے رنگ کی شرٹ اسپانسر کرتا ہے

B.एस फेसबुकमध्ये काम करतो
B.S is working in Facebook
B.S فیسبک میں کام کرتا ہے

C.T करडा शर्ट घालतो
C.T wears grey shirt
C.T بھوری شرٹ پہنتا ہے

D.करडा शर्ट फेसबुकमार्फत प्रायोजित केला गेला आहे
D.Grey shirt is sponsored by Facebook
D.فیسبک کے ذریعہ بھوری شرٹ اسپانسر کی جاتی ہے

Answer: D.करडा शर्ट फेसबुकमार्फत प्रायोजित केला गेला आहे
D.Grey shirt is sponsored by Facebook
D.فیسبک کے ذریعہ بھوری شرٹ اسپانسر کی جاتی ہے

185

सूचना: खालील प्रश्नात कागदाच्या एक तुकड्याला (चौकोनी / गोलाकार / त्रिकोणी) घड्या घातल्या आहेत व भोके पाडली आहेत. हा कागद उलगडल्यावर प्रश्नातील आकृतीप्रमाणे दिसतो. उत्तरादाखल पर्यायांमधून अशी आकृती निवडा जी उलगडल्यावर कागदाचे स्वरूप प्रश्नात दाखविल्याप्रमाणे दिसेल.

DIRECTIONS: In the following question. a sheet (square/circle/triangle) of paper is folder and punch is made. When unfolded the paper sheet looks like the question figure. See the answer figures and select the one that follows the manner in which the paper is folded and punch is made.

ہدایات: مندرجہ ذیل سوالات میں، کاغذ کا ایک کاغذ کی شیٹ (مربع / دائرہ / مثلث) فولڈر ہے اور اس میں چھید بنایا جاتا ہے- جب کاغذ کی شیٹ کو کھولا جاتا ہے تو شیٹ سوال کے تصویر کی طرح نظر آتی ہے- جواب کی تصاویر کا ملاحظہ کریں اور ان میں سے ایک ایسی تصویر کو منتخب کریں جو اس طریقے کی پیروی کرتا ہے جس میں کاغذ کو موڑا گیا ہے اور چھید بنایا گیا ہے-

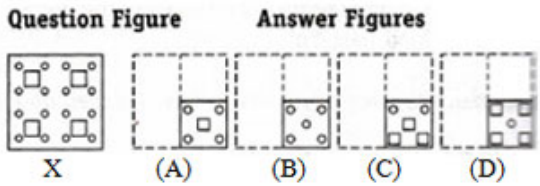

A. (A)

B. (B)

C. (C)

D. (D)

Answer: A. (A)

186

12:20 ला मिनिट आणि तास काट्यादरम्यान कोणता कोण असेल?

What is the angle between minute and hour hand at 12:20?

12:20 بجے منٹ اور گھنٹہ کی سوئیاں کونسا زاویہ بنائیں گی؟

A.260°
A.260°
A.260°

B.110°
B.110°
B.110°

C.120°
C.120°
C.120°

D.20°
D.20°
D.20°

Answer: B.110°
B.110°
B.110°

187 ओझोन थरामध्ये अंटार्क्टिकेवरील आलेल्या भल्यामोठ्या छीद्राचा शोध कोणत्यावर्षी लागला -

The massive hole in the ozone layer over the Antarctica was first discovered in -

انٹارکٹیکا کے اوپر اوزون کی تہہ میں بڑے پیمانے پر سوراخ سب سے پہلے دریافت کیا گیا تھا -

A.1976
A.1976
A.1976

B.1984
B.1984
B.1984

C.1960
C.1960
C.1960

D.वरीलपैकी एकही नाही
D.None of these
D.ان میں سے کوئی بھی نہیں

Answer: B.1984
B.1984
B.1984

188 ‘जुल’ चा संबंध उर्जेशी आहे तसेच ‘पास्कल’चा संबंध याच्याशी आहे

‘Joule’ is related to energy in the same way as ‘Pascal’ is related to

'جول' کا انرجی سے وہی تعلق ہے جو 'پاسکل' کا _____ سے ہے-'

A.वस्तूमान
A.Mass
A.کمیت

B.दाब
B.Pressure
B.دباؤ

C.घनता
C.Density
C.کثافت

D.शुद्धता
D.Purity
D.اصالت

Answer: B.दाब
B.Pressure
B.دباؤ

189 निर्देश: खालील व्यवस्था काळजीपूर्वक वाचा आणि खाली दिलेल्या प्रश्नांची उत्तरे द्या.

P J % 5 D $ L O 3 # A Q 4 @ U F T * Z 8 K 2 M & H

उपरोक्त व्यवास्थेतील सर्व चिन्ह काढून टाकले तर पुढील पर्यायापैकी कोणता घटक उजवी कडून अकरावा असेल?

DIRECTIONS: Study the following arrangement carefully and answer the questions given below.

P J % 5 D $ L O 3 # A Q 4 @ U F T * Z 8 K 2 M & H

If all the symbols in the above arrangement are dropped, then which of the following will be the eleventh from the right end?

ہدایت نیچے دی گی ترتیب کو پڑھئے اور سہی جواب دیجئے

P J % 5 D $ L O 3 # A Q 4 @ U F T * Z 8 K 2 M & H

اگر اپری ترتیبسے سبھی نشان ہٹا دے تو سیدھے ہاتھ سے گیارہوا حرف کونسا ایگا؟

A.D
A.D
A.D

B.P
B.P
B.P

C.Q
C.Q
C.Q

D.L
D.L
D.L

Answer: C.Q
C.Q
C.Q

190 **सूचना:** दिलेल्या पर्यायांमधून श्रेणी पूर्ण करणारी योग्य आकृती निवडा.

DIRECTIONS: Complete the series by choosing right figure from the given choices.

ہدایات: دیئے گئے انتخابات میں سے صحیح تصویر کو منتخب کرکے سلسلہ مکمل کریں۔

Problem Figures

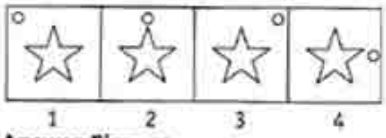

Answer Figures

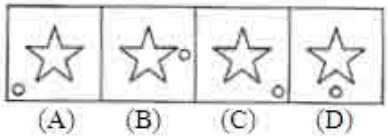

A. (A)

B. (B)

C. (C)

D. (D)

Answer: C. (C)

191 668 ÷ 167 × 284 = ?

668 ÷ 167 × 284 = ?

668 ÷ 167 × 284 = ?

A.1156
A.1156
A.1156

B.1136
B.1136
B.1136

C.1096
C.1096
C.1096

D.1116
D.1116
D.1116

Answer: B.1136
B.1136
B.1136

192 फोटोतल्या एका स्त्रीकडे बोट दाखवून एक पुरुष म्हणतोः “ती माझ्या आईच्या एकुलत्या सुनेची एकुलती मुलगी आहे” मग त्या स्त्रीचे त्या पुरुषासोबत नाते काय?

Pointing to a woman in a photograph a man says: “She is the only daughter of my mother’s only daughter in law”. How is the woman related to the man?

تصویر میں عورت کی طرف اشارہ کرکے آدمی نے کہا: " یے میری ماں کی واحد بہو کی واحد بیٹی ہے" . عورت کا آدمی سے کیا رشتہ تھا؟

A.बहीण
A.Sister
A.بہن

B.सून
B.Daughter-in-law
B.بہو

C.आई
C.Mother
C.ماں

D.मुलगी
D.Daughter
D.بیٹی

Answer: D.मुलगी
D.Daughter
D.بیٹی

For More Info And Videos About TAIT-Exam Syllabus And Other Exam Visit My Channel
TAIT च्या 30 प्रश्नपत्रिका PDF
BADSHAHimp Available Request 9765226781
WWW.YouTube.com/BADSHAHimp
Subscribe My Channel

193 सूचना: दिलेली माहिती काळजीपूर्वक वाचा आणि खालील प्रश्नांची उत्तरे द्या.
सहा मित्र P, Q, R, S, T आणि U वेगवेगळ्या कंपन्यांत काम करतात, जसे - गुगल, ऑरेकल, प्रोमेट्रिक, ऍपल, फेसबुक आणि टाटा आणि प्रत्येकजण कंपनी प्रायोजित वेगवेगळ्या रंगाचे शर्ट घालतात, उदा. पांढरा, काळा, शेंदरी, पिवळा, हिरवा आणि करडा पण हे त्याच क्रमाने असतील असे नाही.
I. ज्याने पांढरा शर्ट घातला आहे तो ऍपलमध्ये काम करतो आणि ज्याने काळा शर्ट घातला आहे तो गुगल मध्ये काम करतो.
II. U हा प्रोमेट्रिक किंवा फेसबुकमध्ये काम करत नाही.
III. P हा शेंदरी रंगाचा शर्ट वापरतो आणि ऑरेकल मध्ये काम करतो.
IV. S फेसबुकमध्ये काम करीत नाही आणि प्रोमेट्रिक हिरव्या रंगाच्या शर्टाला प्रायोजित केलेले नाही.
V. T टाटामध्ये काम करतो आणि S किंवा N दोघेही ऍपल मध्ये काम करत नाही.
VI. फेसबुक हिरव्या किंवा पिवळ्या रंगाचे शर्ट प्रायोजित करत नाहीत आणि R गुगल मध्ये काम करतो.
प्रोमॅट्रिकमध्ये कोण काम करते?

DIRECTIONS: Read the following information carefully and answer the questions that follow.
Six friends P,Q,R,S,T and U works in different companies namely— Google, Oracle, Prometric, Apple, Facebook and Tata and each wears different coloured company- sponsored shirts, viz., White, Black, Orange, Yellow, Green and Grey though not necessarily in the same order.
I. The one wearing the white shirt works in Apple and the one wearing the black shirt works in Google.
II. U does not work in Prometric or Facebook.
III. P wears orange shirt and works in Oracle.
IV. S does not work in Facebook and green coloured shirt is not sponsored by Prometric.
V. T works in Tata, and neither S nor Q works in Apple.
VI. Facebook does not sponsor green or yellow coloured shirts and R works in Goole.
Who works in PROMETRIC ?

ہدایات: مندرجہ ذیل معلومات کو دھیان سے پڑھیں اور نیچے دیے گئے سوالوں کے جواب دیں۔
مختلف کمپنیوں میں کام کرتے ہیں جن کے نام ہیں – گوگل، اوریکل، پرومیٹرک، ایپل، فیسبک، اور ٹاٹا U اور T، S، R، Q، P چھ دوست اور ہر ایک مختلف رنگ کی کمپنی کی اسپانسر کی ہوئی شرٹ پہنتا ہے جیسے سفید، کالی، نارنگی، پیلی، ہری اور بھوری اگرچہ لازمی طور پر یکساں ترتیب میں نہیں۔
I۔ سفید شرٹ پہننے والا ایپل میں کام کرتا ہے اور کالی شرٹ پہننے والا گوگل میں کام کرتا ہے۔
II- U پرومیٹرک یا فیسبک میں کام نہیں کرتا ہے۔
III- P نارنگی شرٹ پہنتا ہے اور اوریکل میں کام کرتا ہے۔
IV- S فیسبک میں کام نہیں کرتا ہے اور ہرے رنگ کی شرٹ پرومیٹرک کے ذریعہ اسپانسر کی ہوئی نہیں ہے۔
V- T ٹاٹا میں کام کرتا ہے، اور نہ تو Q نہ ہی S ایپل میں کام کرتا ہے۔
VI گوگل میں کام کرتا ہے۔ R ۔ فیسبک ہرے یا پیلی رنگ کی شرٹ اسپانسر نہیں کرتا ہے اور
پرومیٹرک میں کون کام کرتا ہے؟

A.P
A.P
A.P

B.Q
B.Q
B.Q

C.R
C.R
C.R

D.S
D.S
D.S

For More Info And Videos About TAIT-Exam Syllabus And Other Exam Visit My Channel
TAIT च्या 30 प्रश्नपत्रिका PDF
BADSHAHimp Available Request 9765226781
WWW.YouTube.com/BADSHAHimp
Subscribe My Channel

Answer: D.S
D.S
D.S

194 एका संख्येच्या 1/2 हे त्या संख्येच्या 1/3 पेक्षा 17 ने जास्त आहे. ती संख्या काढा?

1/2 of a number is greater than 1/3 of that number by 17. What is the number?

ایک عدد کا1/2 اس کے1/3 سے 17 مرتبہ بڑا ہے،عدد کیا ہے؟

A.54
A.54
A.54

B.84
B.84
B.84

C.102
C.102
C.102

D.112
D.112
D.112

Answer: C.102
C.102
C.102

195 सूचनाः दिलेल्या पर्यायांमधून ऍनालॉगस शब्द निवडा.

अनिमोमीटरचा संबंध वाऱ्याच्या वेगाशी आहे जसा एरोमीटरचा संबंध ...सोबत आहे.

DIRECTIONS: Choose the analogous word from the given alternatives.

Anemometer is to Wind speed as Aerometer is to _____.

ہدایات: دیے گئے متبادل سے مطابق لفظ کا انتخاب کریں

انینومیٹر کا تعلق ہوا کی رفتار کے ساتھ ویسے ہی ہے جیسا کہ ایرومیٹر کا ---------- کے ساتھ .

For More Info And Videos About TAIT-Exam Syllabus And Other Exam Visit My Channel
TAIT च्या 30 प्रश्नपत्रिका PDF
BADSHAHimp Available Request 9765226781
WWW.YouTube.com/BADSHAHimp
Subscribe My Channel

A.पावसाचे प्रमाण
A.Amount of rain
A. بارش کی تعداد

B.वातावरणाचा दाब
B.Atmospheric pressure
B. فضایی دباؤ

C.विद्युत प्रवाह
C.Electric current
C. بجلی

D.वायूंची घनता
D.Density of gases
D. گسس کا گناپن

Answer: D.वायूंची घनता
D.Density of gases
D. گسس کا گناپن

196 श्री. X चे सध्याचे वय त्यांच्या मुलीच्या वयाच्या दुप्पट आहे. जर त्यांच्या मुलीचे वर्तमान वय 20 वर्षे असेल तर किती वर्षांपूर्वी त्यांचे वय त्यांच्या मुलीच्या वयाच्या तीनपट होते?

The present age of Mr. X is double of his daughter. If the present age of her daughter is 20 years then how many year ago his age was three times that of his daughter?

مسٹر X کی موجودہ عمر اُس کی بیٹی کی عمر کی دو گنا ہے۔ اگر اس کی بیٹی کی موجودہ عمر 20 سال ہے تو کتنے سال پہلے مسٹر X کی عمر اُن کی بیٹی کی عمر کی تین گنا تھی؟

A.5
A.5
A.5

B.8
B.8
B.8

C.10
C.10
C.10

D.12
D.12
D.12

Answer: C.10
C.10
C.10

For More Info And Videos About TAIT-Exam Syllabus And Other Exam Visit My Channel
TAIT च्या 30 प्रश्नपत्रिका PDF
BADSHAHimp Available Request 9765226781
WWW.YouTube.com/BADSHAHimp
Subscribe My Channel

197 दूरध्वनीचा शोध कोण लावला?

Who is known as the inventor of Telephone?

ٹیلیفون کی کھوج کی ہے :

A.जॉन लोगी बैयर्ड
A.John Logie Baird
A.جان لوگی بیرڈ

B.जेम्स वॅट
B.James Watt
B.جیمس واٹ

C.अलेक्झांडर ग्राहम बेल
C.Alexander Graham Bell
C.الیکزینڈر گراہم بیل

D.ब्रिट ब्रदर्स
D.Wright Brothers
D.رائٹ بردرس

Answer: C.अलेक्झांडर ग्राहम बेल
C.Alexander Graham Bell
C.الیکزینڈر گراہم بیل

198 सूचना: दिलेल्या पर्यायांमधून वेगळे ते निवडा.

DIRECTIONS: Choose the odd one out from the given alternatives.

سمت: دیے گئے متبادل میں سے بے جوڑ کو چنیں۔

A.26, 3
A.26, 3
A.26, 3

B.39, 4
B.39, 4
B.39, 4

C.44, 6
C.44, 6
C.44, 6

For More Info And Videos About TAIT-Exam Syllabus And Other Exam Visit My Channel
TAIT च्या 30 प्रश्नपत्रिका PDF
BADSHAHimp Available Request 9765226781
YouTube WWW.YouTube.com/BADSHAHimp
Subscribe My Channel

D.44, 7
D.44, 7
D.44, 7

Answer: B.39, 4
B.39, 4
B.39, 4

199 निर्देश: खालील प्रत्येक वर्ण मालिके मध्ये, काही अक्षरे गहाळ आहेत, जे खाली दिलेल्या पर्यायां मध्ये एका क्रमाने दिलेली आहेत. योग्य पर्याय निवडा.

ab - aa - bbb - aaa - bbba

DIRECTION: In each of the following letter series, some of the letters are missing, which are given in that order as one of the alternatives below it. Choose the correct alternative.

ab - aa - bbb - aaa - bbba

ہدایت نیچے دے حرف کے سرج مے کچھ حرف گمشدہ ہے نیچے دے گئے اختیارات سے سسہی اختیار چنے

ab - aa - bbb - aaa - bbba

A.abba
A.abba
A.abba

B.baab
B.baab
B.baab

C.aaab
C.aaab
C.aaab

D.ahab
D.ahab
D.ahab

Answer: B.baab
B.baab
B.baab

For More Info And Videos About TAIT-Exam Syllabus And Other Exam Visit My Channel
TAIT च्या 30 प्रश्नपत्रिका PDF
BADSHAHimp Available Request 9765226781
YouTube WWW.YouTube.com/BADSHAHimp
Subscribe My Channel

200 अनैतिक कृत्यात सामील असणाऱ्या प्राचार्याचे तुम्ही मान कसे ठेवणार?

How would you pay regards to a principal involved in immoral practices?

آپ غیر اخلاقی طریقوں میں ملوث ایک پرنسپل کوکس طرح ریگارڈ کریں گے؟

A.पहिल्यांदाच फक्त कार्यालयात येताना
A.Only at first sight when you visit the office
A.دفتر جانے پر صرف پہلی نظر میں

B.दररोज सकाळी व संध्याकाळी कार्यालयीन इमारत सोडताना
B.In the morning and evening before leaving the institution
B.صبح اور ادارہ چھوڑنے سے پہلے شام میں

C.फक्त त्याला भेटल्यावर.
C.Only when you meet meet him.
C.صرف جب تم ان سے ملاقات کریں.

D.आपण अश्या व्यक्तीकडे दुर्लक्ष करण्याचा प्रयत्न करणार
D.You try neglect such a person.
D.آپ ایسے شخص کو نظرانداز کرنے کی کوشش کریں.

Answer: A.पहिल्यांदाच फक्त कार्यालयात येताना
A.Only at first sight when you visit the office
A.دفتر جانے پر صرف پہلی نظر میں

For More Info And Videos About TAIT-Exam Syllabus And Other Exam Visit My Channel
TAIT च्या 30 प्रश्नपत्रिका PDF
BADSHAHimp Available Request 9765226781
YouTube WWW.YouTube.com/BADSHAHimp
Subscribe My Channel

Question Paper Title : TAIT_PAPER_6

Date of Exam : 2017-12-15 09:00:00.0

1	Out of the four alternatives, choose the one which can be substituted for the given words/sentence. The act of the killing of one's wife
	A.Uxoricide
	B.Dowry
	C.Wedding
	D.Alimony
Answer:	A.Uxoricide

2	Out of the given optionswhich best expresses the meaning of the given Proverb? The squeaky wheel gets the grease.
	A.Attention is paid to those problems that are neglected
	B.Attention is paid to those problems that are never made noticeable
	C.Attention is paid to those problems that are made most noticeable
	D.No attention is paid to those problems that are made most noticeable
Answer:	C.Attention is paid to those problems that are made most noticeable

For More Info And Videos About TAIT-Exam Syllabus And Other Exam Visit My Channel
BADSHAHimp SubScribe Like & Share YouTube WWW.YouTube.com/BADSHAHimp

3

सूचना: दिलेल्या पर्यायांमधून श्रेणी पूर्ण करणारी योग्य आकृती निवडा.

DIRECTIONS: Complete the series by choosing right figure from the given choices.

ہدایات: دیئے گئے اختیارات میں صحیح شکل کا انتخاب کر کے سیریز کو مکمل کیجیئے۔

Problem Figures

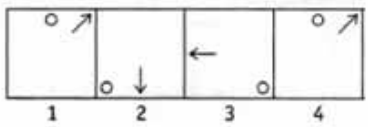

Answer Figures

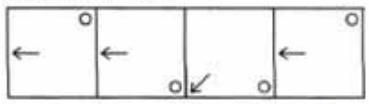

A. (A)

B. (B)

C. (C)

D. (D)

Answer: B. (B)

4

सी जीवनसत्व यात आहे

Vitamin C is in

وٹامن سی ہے

A.संत्री आणि टोमॅटो
A.Oranges and tomatoes
A. سنترہ اور ٹماٹر

B.बटाटे आणि ब्रोकोली
B.Potatoes and broccoli
B. آلو اور بروکولی

C.कोबी, ब्रसेल्स स्प्राउट्स आणि स्ट्रॉबेरीज
C.Cabbage, Brussels sprouts and Strawberries
C. گوبھی، انکرت برسلز اور اسٹرابیری

D.वरील सर्व
D.All the above
D. مندرجہ بالا تمام

For More Info And Videos About TAIT-Exam Syllabus And Other Exam Visit My Channel
BADSHAHimp SubScribe Like & Share WWW.YouTube.com/BADSHAHimp

Answer: D.वरील सर्व
D.All the above
D. مندرجہ بالا تمام

5 सूचना: A, B, C, आणि D नावे दिलेल्या चार आकृतींपैकी तीन आकृत्या मिळून एक श्रेणी तयार होते किंवा त्यांच्यात या ना त्या प्रकारचे साम्य आहे, तर यातील एक आकृती इतरांपेक्षा निराळी आहे. तुम्हाला या चारांपैकी वेगळी (असंबद्ध) असणारी आकृती निवडायची आहे.

DIRECTIONS: Three of the four figures marked A, B, C, and D are in sequence or similarity in some way or the other, while one of them is different from the rest. You have to choose the figure which is different (odd).

ہدایات: چار شکلوں میں سے جن پر A، B، C اور D کے نشان لگائے گئے تین ایسی شکلوں چنئے، جو ہو بہو ایک جیسی ہے اور جو شکل ان سے ہٹکے ہے، اسکو جانیئے

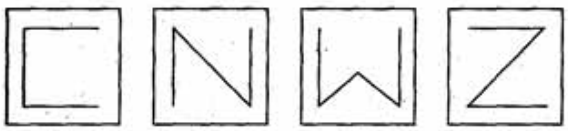

A. (A)

B. (B)

C. (C)

D. (D)

Answer: C. (C)

6 Fill in the blank with the correct article.
A word to _____wise is sufficient.

A.the

B.a

C.an

D.No article required

Answer: A.the

For More Info And Videos About TAIT-Exam Syllabus And Other Exam Visit My Channel
BADSHAHimp Subscribe Like & Share YouTube WWW.YouTube.com/BADSHAHimp

7	खालील आकृतीमध्ये किती त्रिकोण आहेत ते मोजा? Count the number of triangles in the following figure? نیچے دی گئی شکلوں میں مثلث گینیئے؟ 
	A. 6
	B. 7
	C. 8
	D. 9
Answer:	C. 8
8	निर्देश: मालिका पूर्ण करा A, Q, B, R, C, S, D, ? DIRECTION: Complete the series A, Q, B, R, C, S, D, ? ہدایت اس سرج کو مکمّل کرو A, Q, B, R, C, S, D, ?
	A.E A.E A.E
	B.T B.T B.T
	C.F C.F C.F
	D.D D.D D.D

Answer:	B.T B.T B.T

9	$\left[\frac{(2)^3-27}{(2)^2+6+9}\right] = ?$
	A. 2
	B. -1
	C. 0
	D. 5
Answer:	B. -1

10	शिक्षणाचे उपचारात्मक कार्यात हे समाविष्ट असतात The Remedial function of teaching includes— تدریس کے اصلاحی امور میں شامل ہے—
	A.शिक्षण कौशल्य निवडणे, रणनीती आणि मूलभूत तत्त्व इ. . A.Selection of teaching skill, tactics, and principle etc. A. تدریسی مہارت، حکمت عملی، اور اصولوں وغیرہ کا انتخاب
	B.प्रतिक्रिया प्रक्रियेची संघटना B.Organisation of feed-back procedure B. فیڈبیک کے عمل کی تنظیم
	C.निदान अनुसार उपाय C.Remedy according to diagnosis C. تشخیص کے مطابق علاج
	D.वरील सर्व D.All the above D.مندرجہ بالا سبھی
Answer:	D.वरील सर्व D.All the above D.مندرجہ بالا سبھی

For More Info And Videos About TAIT-Exam Syllabus And Other Exam Visit My Channel
BADSHAHimp SubScribe Like & Share WWW.YouTube.com/BADSHAHimp

11	Out of the given options, choose the one which is the correct indirect speech of the sentence given below. The King said, “It gives me great pleasure to be here this evening.”
	A.The King said that it gave him great pleasure to be here that evening.
	B.The King said that it gives him great pleasure to be here that evening.
	C.The King said that it give him great pleasure to be there this evening.
	D.The King said that it gave him great pleasure to be there that evening.
Answer:	D.The King said that it gave him great pleasure to be there that evening.

12	प्रायोगिक मानसशास्त्राचे पिता_____ हे आहेत. Father of experimental psychology تجرباتی نفسیات کا باوا آدام:
	A.विल्हेल्म वंडट A.Wilhem Wundt A. ولہم ونٹ
	B.सिगमंड फ्रायड B.Sigmund Frend B.سگمنڈ فرائیڈ
	C.फ्रान्सिस गॅलटन C.Francis Galton C.فرانسس گیلٹن
	D.स्टॅनफोर्ड बेनेट D.Stanford Benet D.اسٹینفرڈ بنٹ
Answer:	C.फ्रान्सिस गॅलटन C.Francis Galton C.فرانسس گیلٹن

For More Info And Videos About TAIT-Exam Syllabus And Other Exam Visit My Channel
BADSHAHimp SubScribe Like & Share YouTube WWW.YouTube.com/BADSHAHimp

13 सूचना: प्रत्येक प्रश्नाला एक प्रमुख विधानासोबत चार विधाने आहेत ज्यांच्याखाली A, B, C, आणि D असे चार विधान आहेत. क्रमवार विधानांची जोडी निवडा ज्यामध्ये प्रथम विधान दुसऱ्या विधानाला सुचवते, आणि दोन्ही विधाने तर्किकदृष्ट्या प्रमुख विधानासोबत निगडित असेल.

जेव्हा आपल्याला खात्री असते, आपण चांगले कार्य करतो
A. आम्हाला खात्री आहे
B. आम्हाला खात्री नाही
C. आम्ही चांगले कार्य केले
D. आम्ही चांगले कार्य केले नाही

DIRECTIONS: Each question has a main statement followed by four statements labelled A, B, C and D. Choose the ordered pair of statements, where the first statement implies the second, and the two statements are logically consistent with the main statement.

When we feel assured , we perform well
A. we felt assured
B. we did not feel assured
C. we performed well
D. we did not perform well

ہدایت: ہر سوال میں ایک جملہ ہے جسکے بعد چار جملےاے، بی،سی اور ڈی کے نام سے دئے گئے ہیں اسمیں منسلک جوڑیوں کو چنئے۔ جہاں پہلا جملہ دوسرے جملہ کی اور اشارہ کر رہا ہے اور دو جملے منطقی مرکزی بیان کے مطابق ہیں

جب ہمیں یقین ہوتا ہے تو ہم اچھا پرفارم کرتے ہیں
A۔ ہمیں یقین تھا
B۔ ہمیں یقین نہیں تھا
C۔ ہم نے اچھا پرفارم کیا
D۔ ہم نے اچھا پرفارم نہیں کیا

A.AC
A.AC
A.AC

B.BA
B.BA
B.BA

C.DA
C.DA
C.DA

D.CD
D.CD
D.CD

For More Info And Videos About TAIT-Exam Syllabus And Other Exam Visit My Channel
BADSHAHimp SubScribe Like & Share YouTube WWW.YouTube.com/BADSHAHimp

Answer: A.AC
A.AC
A.AC

14 खालीलपैकी कोणते स्मरणशक्तीबरोबर जोडलेले नाही?

Which one of the following is not associated with Memory?

مندرجہ ذیل میں سے کونسی چیز یاداشت سے متعلق ہے؟

A.शिकणे
A.Learning
A.سیکھنا

B.ओळखणे
B.Recognition
B.شناخت

C.आठवणे
C.Recall
C.یاد رکھنا

D.मूल्यांकन
D.Evaluation
D.تشخیص

Answer: D.मूल्यांकन
D.Evaluation
D.تشخیص

15 दोन विद्यार्थ्यांच्या वयाचे गुणोत्तर 3:2 आहे. त्यांच्यापैकी एक विद्यार्थी दुसऱ्या विद्यार्थ्यापेक्षा 5 वर्षांनी मोठा आहे. लहान विद्यार्थ्याचे वय काय आहे (वर्षांमध्ये)?

The ratio of ages of two student is 3 : 2. One of them is 5 years elder than other. What is the age of younger student (in years)?

طلباء کی عمروں کا تناسب 2:3 ہے۔ اُن میں سے ایک 5 سال بڑا ہے دوسرے سےتو چھوٹے طالب علم کی عمر (سالوں میں)کیا ہے؟ 2

A.2
A.2
A.2

B.10
B.10
B.10

C.2
C.2
C.2

D.15
D.15
D.15

Answer: B.10
B.10
B.10

16 G.P.5, 10, 20, 40, … मालिकेतील कितव्या अनुक्रमाचे 320 आहे?

Which term of the G.P. 5, 10, 20, 40, … is 320?

5, 10, 20, 40, … 320 اس سرج کی کونسی ٹرم ہے?

A.9वे
A.9th
A.9واں

B.12वे
B.12th
B.12واں

C.7वे
C.7th
C.7واں

D.14वे
D.14th
D.14واں

Answer: C.7वे
C.7th
C.7واں

17 ‘ निरंतर ’ या शब्दाची संधी सोडवा.

	A.नि: + अंतर
	B.निर + अंतर
	C.निरन् + तर
	D.नि: + नंतर
Answer:	A.नि: + अंतर

18	Out of the given four words only one is not spelt correctly. Find the word that is not correctly spelt.
	A.Annalisis
	B.Campaign
	C.Challenge
	D.Characteristic
Answer:	A.Annalisis

19	$(625)^{3/4}$चे मूल्य आहे? The value of $(625)^{3/4}$is? $(625)^{3/4}$ کی قیمت ہے
	A.25 A.25 A.25
	B.$(1875)^{1/4}$ B.$(1875)^{1/4}$ B.$(1875)^{1/4}$
	C.$(1875)^{1/3}$ C.$(1875)^{1/3}$ C.$(1875)^{1/3}$
	D.125 D.125 D.125

Answer:	D.125 D.125 D.125

20	माता डास रक्त का शोषून घेते? Why does female mosquito suck blood? مادہ مچھر خون کیوں چوستی ہے؟
	A.मलेरिया पसरवण्यासाठी A.For spreading malaria A. ملیریا پھیلانے کے لئے
	B.संक्रमण निर्माण करण्यासाठी B.For generating infection B. انفیکشن پیدا کرنے کے لئے
	C.स्वतःचे जीवन वाचवण्यासाठी C.To save her own life C. اس کی اپنی زندگی کو بچانے کے لئے
	D.अंडी निर्मिती करण्यासाठी D.To produce eggs D. انڈے کی پیداوار کے لئے
Answer:	D.अंडी निर्मिती करण्यासाठी D.To produce eggs D. انڈے کی پیداوار کے لئے

21	Choose the word which is most similar in meaning to the given word. DECEPTIVE
	A.Misleading
	B.Honest
	C.Candid
	D.Forthright
Answer:	A.Misleading

22 सूचना : खालील प्रत्येक प्रश्नात दोन विधाने I आणि II दिलेले आहेत. हे विधान एकतर स्वतंत्र कारण असू शकतात किंवा स्वतंत्र कारणांचे परिणाम असू शकतात. यांपैकी एक विधान इतर विधानाचा परिणाम असू शकतो. दोन्ही विधाने वाचा आणि खालीलपैकी कोणत्या उत्तराचा पर्याय या दोन्ही विधानांमधील संबंधांचे वर्णन करतो ते ठरवा.

विधान :
I. स्थानिक बाजारपेठेत सोन्याचे भाव वाढले आहेत.
II. भारताने सुवर्ण अलंकारांच्या डिझाईनमध्ये अनेक बक्षिसे जिंकली आहेत.

DIRECTIONS: Below in each question are given two statements I and II. These statements may be either independent causes or may be effects of independent causes. One of these statements may be the effect of the other statement. Read both the statements and decide which of the following answer choice correctly depicts the relationship between these two statements.

Statements:
I. Prices of gold have gone up in the local market.
II. India has won several prizes in design of gold ornaments.

ہدایات: نیچے ہر سوال میں دو بیانات I اور II دیے گئے ہیں۔ یہ بیانات یا تو آزاد وجوہات کے اثرات ہو سکتے ہیں یا پھر آزاد وجوہات کے اثرات ہو سکتے ہیں۔ ان بیانات میں سے ایک بیان دوسرے کا اثر ہو سکتا ہے۔دونوں بیانات پڑھیں اور فیصلہ کریں کہ نیچے دیے گئے کس جواب کا انتخاب ان دونوں بیانات کے در میان تعلق کو ٹھیک سے ظاہر کرتا ہے۔

بیانات:
I – لوکل مارکیٹ میں سونے کی قیمتوں میں اضافہ ہو گیا ہے۔
II - انڈیا نے سونے کے زیورات کے ڈیزائن میں کئی انعامات جیتے ہیں۔

A.I हा परिणाम आहे आणि II हे त्याचे तात्काळ आणि प्रमुख कारण आहे.
A.I is effect and II is its immediate and principal cause.
A. بیان نمبر I اس کی فوری اور بنیادی وجہ ہے۔ II اثر ہے اور بیان نمبر

B.I हे तात्काळ आणि प्रमुख कारण आहे आणि II हा त्याचा परिणाम आहे
B.I is the immediate and principal cause and II its effect.
B. بیان نمبر I اس کی فوری اور بنیادی وجہ ہے اور بیان نمبر II اس کا اثر ہے۔

C.I हा परिणाम आहे परंतु II हे त्याचे तात्काळ आणि प्रमुख कारण नाही.
C.I is an effect but II is not its immediate and principal cause.
C. بیان نمبر I اس کی فوری اور بنیادی وجہ نہیں ہے۔ II اثر ہے لیکن بیان نمبر

D.II हा परिणाम आहे परंतु I हे त्याचे तात्काळ आणि प्रमुख कारण नाही.
D.II is an effect but I is not its immediate and principal cause.
D. بیان نمبر II اس کی فوری اور بنیادی وجہ نہیں ہے۔ I اثر ہے لیکن بیان نمبر

Answer: C.I हा परिणाम आहे परंतु II हे त्याचे तात्काळ आणि प्रमुख कारण नाही.
C.I is an effect but II is not its immediate and principal cause.
C. بیان نمبر I اس کی فوری اور بنیادی وجہ نہیں ہے۔ II اثر ہے لیکن بیان نمبر

23 विधान:
लोकसंख्येत कुत्र्यांची संख्या वाढत आहे त्यांनी लोकांवर आक्रमण करायला सुरुवात केली आहे आणि रेबीजचे प्रकरण देखील वाढत आहे.

कृतीचा कोर्स:
I. सर्व देशांतर्गत कुत्रे नपुंसक केले पाहिजेत.
II. सर्व कुत्र्यांना ठार मारले पाहिजे.

Statement:
The number of dogs are increasing in the locality they have started attacking people and the cases of rabies are also increasing.

Course of actions:
I. All the domestic dogs should be neutered.
II. All the dogs should be killed.

بیان:
علاقے میں کتوں کی تعداد بڑھ رہی ہے انہوں نے لوگوں پر حملے شروع کر دیے ہیں اور کتوں کے کاٹنے کے واقعات میں بھی اضافہ ہو رہا ہے۔

لائحہ عمل:
I۔تمام پالتو کتوں کی نس بندی کی جائے۔
II۔ تمام کتوں کو مار دینا چاہیے۔

A.फक्त I अनुसरून आहे
A.Only I follows
A. صرف I لاگو ہو گا۔

B.फक्त II अनुसरण करते आहे
B.Only II follows
B. صرف II لاگو ہو گا۔

C.एकतर I किंवा II अनुसरून आहे
C.Either I or II follows
C. I یا II میں سے ایک لاگو ہو گا۔

D.I किंवा II दोन्हीपैकी काहीही अनुसरण करत नाही
D.Neither I nor II follows
D. I اور II میں سے کوئی بھی لاگو نہیں ہو گا۔

Answer: D.I किंवा II दोन्हीपैकी काहीही अनुसरण करत नाही
D.Neither I nor II follows
D. I اور II میں سے کوئی بھی لاگو نہیں ہو گا۔

24	आयफेल टॉवर _____येथे आहे The Eiffel Tower is in – _____میں ایفل ٹاور ہے
	A.युएसए A.USA A.یو ایس اے
	B.फ्रान्स B.France B.فرانس
	C.जर्मनी C.Germany C.جرمنی
	D.इटली D.Italy D.اٹلی
Answer:	B.फ्रान्स B.France B.فرانس
25	सूचनाः दिलेल्या पर्यायांमधून ऍनालॉगस शब्द निवडा. ज्युपिटर आणि सॅटर्न यांचे जसे नाते आहे तसे मर्क्युरी आणि .....यांचे नाते आहे. DIRECTIONS: Choose the analogous word from the given alternatives. Jupiter is to Saturn as Mercury is to _____. ہدایات: دیے گئے متبادل سے مطابق لفظ کا انتخاب کریں جوپیٹر اگر سٹرن کے لئے ہے تو مرکری ------ کے لئے .
	A.युरेनस A.Uranus A. ارنس
	B.व्हिनस B.Venus B. وینس

C.नेप्चुन
C.Neptune
C. نیپتونے

D.मंगळ
D.Mars
D. مارس

Answer: D.मंगळ
D.Mars
D. مارس

26 सूचना: खालील प्रश्नात कागदाच्या एक तुकड्याला प्रश्नातील आकृतीत दाखविल्याप्रमाणे घडी घातली आहे. उत्तरादाखल पर्यायांमधून अशी आकृती निवडा जी भोक पडल्यानंतर उलगडलेल्या कागदाचे स्वरूप दाखवेल.

DIRECTIONS: In the following question a piece of paper is folded in the manner shown in the question figure(s). Select the figure out of the answer choices showing the unfolded pattern after the punches (cut).

ہدایات: نیچے دیئے گئے سوالوں میں کاغذ کا ایک ٹکڑا اس طرح جوڑا گیا ہے جیسے سوال کی شکل میں بتایا گیا ہے، دیئے گئے جوابات کے اختیارات میں سے اس طرح انتخاب کیجیئے کہ کٹ لگانے کے بعد بغیر جوڑا ہوا پیٹرن دکھائی دے۔

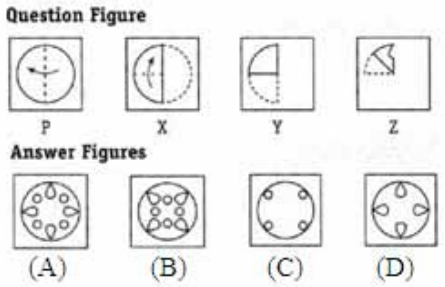

A. (A)

B. (B)

C. (C)

D. (D)

Answer: D. (D)

27 नवीनतम आणि वाखानण्याजोग्या कल्पना, पदार्थ आणि समस्या निर्माण करण्याच्या क्षमतेला म्हणतात:

The ability to produce ideas, objects & problems that are novel and appropriate is known as:

ایسے خیالات ، چیزیں اور مسائل پیدا کرنے کی صلاحیت جو نادر اور مناسب ہوں ، وہ جانی جاتی ہے:

A.आवड
A.Interests
A.میلانات

B.दृष्टिकोन
B.Aptitude
B.لیاقت (ایپٹی ٹیوڈ)

C.सृजनशिलता
C.Creativity
C. تخلیق

D.बुद्धिमत्ता
D.Intelligence
D.ذہانت

Answer: C.सृजनशिलता
C.Creativity
C. تخلیق

28 लिओनेल मेस्सी हे _____ याच्याशी संबंधित आहेत

Lionel Messi is related to –

لیونیل میسی _____ سے وابستہ ہے

A.फुटबॉल
A.Football
A.فٹبال

B.अमेरीकन फुटबॉल
B.American Football
B.امریکی فٹبال

C.बास्केटबॉल
C.Basketball
C.باسکٹ بال

D.व्हॉलीबॉल
D.Volleyball
D.وولی بال

Answer: A.फुटबॉल
A.Football
A.فٹبال

29 Out of the given four words only one is spelt correctly. Find the word that is correctly spelt.

A.Argument

B.Adress

C.Adultary

D.Adviseable

Answer: A.Argument

30 दिलेली आकृती POS ही रेषा आहे, x काढा:

In the given figure POS is a line, find x:

دی گئی شکل میں POS ایک لائن ہے، X تلاش کریں:

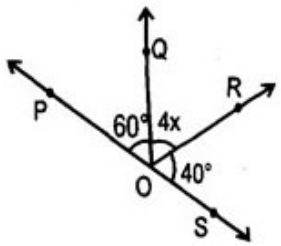

(A) 20°

(B) 80°

(C) 10°

(D) 100°

Answer: (A) 20°

31 शिकवणे हे सुधारणा प्रक्रिया मानले जाते कारण ते —शी संबंधित आहे

The teaching is treated as improvement process because it is related to—

اساتذہ کو بہتری کے طور پر ٹریٹ کیا جاتا ہے کیونکہ یہ --- سے متعلق ہے-

A.शिक्षकामधील स्वयं-सुधारणा
A.The self-improvements in a teacher
A.ایک استاد کا خود کو بہتر بنانا

B.मुलाच्या वर्तणुकीमधील इच्छित सुधारणा
B.The desirable improvements in child's behaviour
B.بچے کے رویے میں مطلوبہ اصلاحات

C.संस्थेमधील सुधारणा
C.The improvements in the institution
C.ادارے میں بہتری

D.मानवी साहित्यामधील सुधारणा
D.The improvements in human material
D.انسانی مواد میں بہتری

Answer: B.मुलाच्या वर्तणुकीमधील इच्छित सुधारणा
B.The desirable improvements in child's behaviour
B.بچے کے رویے میں مطلوبہ اصلاحات

32 धड्याचे नियोजन .....च्या संभाव्यतांचा विकास करते

A lesson plan develops the possibilities of

سبق کی منصوبہ بندی --- کےامکانات تیار کرتی ہے

A.समायोजन
A.Adjustment
A.ایڈجسٹمنٹ

B.अनियमितता
B.Maladjustment
B.مال ایڈجسٹمنٹ

C.विचलन
C.Deviation
C.انحراف

D.यापैकी कोणतेही नाही
D.None of these
D.ان میں سے کوئی نہیں

Answer: A.समायोजन
A.Adjustment
A.ایڈجسٹمنٹ

33 डाग देण्यासाठी लागणारे घटक हे आहेत:

Constituents of Solder are:

سولر کے اجزاء ہیں:

A.पीबी आणि एसएन
A.Pb and Sn
A.پی بی اور ایس این

B.पीबी आणि झेडएन
B.Pb and Zn
B.پی بی اور زیڈ این

C.झेडएन एन आई
C.Zn and Ni
C.زیڈ ایند اور این آئی

D.झेडएन आणि एसएन
D.Zn and Sn
D.زیڈ این اور ایس این

Answer: A.पीबी आणि एसएन
A.Pb and Sn
A.پی بی اور ایس این

34 **सूचना:** खालील प्रश्नात असे 3 घटक आहेत ज्यांचा परस्परांशी विशिष्ट संबंध आहे. समान संबंध वर्तुळाच्या संचांनी दर्शविलेला आहे, प्रत्येक वर्तुळ त्याचा आकार कितीही असला तरी, एका घटकाचे प्रतिनिधित्व करते. योग्य वर्तुळाच्या संचांशी खालील घटकांच्या जोड्या लावा.

DIRECTION: The question below has three items having certain relationship among them. The same relationship is expressed by sets of circles, each circle representing one item irrespective of its size. Match the items with right set of circles.

ہدایت:مندرجہ ذیل سوال میں تین آئٹم ہیں جن کے مابین مختلف تعلقات ہیں۔ دائروں کے ایک سیٹ کے ذریعہ یکساں تعلق ظاہر کیا جاتا ہے، ہر دائرہ سائز سے قطع نظر ایک آئٹم کی نمائندگی کرتا ہے۔ دائروں کے درست سیٹ کے ساتھ آئٹم کو ملائیں۔

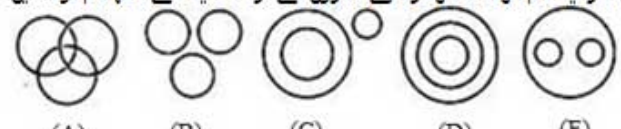

भाजीपाला, फळे, वांगी

Vegetable, Fruit, Brinjal

سبزی، پھل، بینگن

A. (A)

B. (B)

C. (C)

D. (D)

Answer: C. (C)

35 11:09 वाजता घड्याळामध्ये दिसणारी वेळ. घड्याळामध्य एकाय वेळ दिसेल?

Time appears in the mirror 11:09. Then what time will be appear in clock?

آئینہ میں دکھ رہا وقت 11:09 منٹ ہے تو گھڑی میں کیا وقت ہو رہا ہوگا؟

A.1:51
A.1:51
A.1:51

B.12:09
B.12:09
B.12:09

C.12:51
C.12:51
C.12:51

D.1:09
D.1:09
D.1:09

Answer: C.12:51
C.12:51
C.12:51

36 414 ×532 = ?

414 ×532 = ?

?=532×414

A.220124
A.220124
A.220124

B.220248
B.220248
B.220248

C.220644
C.220644
C.220644

D.220478
D.220478
D.220478

Answer: B.220248
B.220248
B.220248

37 खालीलपैकी कोणता कुपोषणाचा रोग नाही ?

Which of the following is not a malnutrition disease?

مندرجہ ذیل میں سے کون سی غذائی قلت کی کمی سے ہونے والی بیماری نہیں ہے؟

A.मासक्षय
A.Marasmus
A.مرسمس

B.टायफायड
B.Typhoid
B. ٹائیفائیڈ

C.स्कर्वी
C.Scurvy
C.اسکروی

D.गलगंड
D.Goiter
D.گائٹر

Answer: B.टायफायड
B.Typhoid
B. ٹائیفائیڈ

38 शिक्षणाचे सातत्य — मधून पसरते

Teaching continuum spreads from—

اساتذہ کی تعلیم --- سے پھیلتی ہے

A.शिकवणीशी जुळवून घेणे
A.Conditioning to Indoctrination
A.انڈوکرٹرائینیشن کی کنڈیشنگ

B.शिकवणीसाठी प्रशिक्षण घेणे
B.Training to Indoctrination
B.انڈوکرٹرائینیشن کیتربیت

C.शिकवणीसाठी सूचना देणे
C.Instruction to Indoctrination
C.انڈوکرٹرائینیشن کی ہدایات

D.वरीलपैकी कोणतेही नाही
D.None of the above
D.مذکورہ بالا میں سے کوئی بھی نہیں

Answer:

A.शिकवणीशी जुळवून घेणे
A.Conditioning to Indoctrination
A.انڈوکرٹرائینیشن کی کنڈیشنگ

39

बेरंग त्वचा आणि केसांचे रंग बदलणे कश्याच्या अभावामुळे होते-

Patchy skin and discoloration of hair is due to deficiency of

جلد میں دھبے اور بال کس چیز کی کمی کی وجہ سے ٹوٹتے ہیں

A.प्रोटीन
A.Protein
A.پروٹین

B.ए जीवनसत्व
B.Vitamin –A
B.وٹامن اے

C.खनिज
C.Minerals
C.معدنیات

D.बी6 जीवनसत्व
D.Vitamin –B6
D.وٹامن- B6

Answer:

A.प्रोटीन
A.Protein
A.پروٹین

40

सूचना: खालील प्रश्नात उत्तरातील पर्यायांपैकी कोणत्या पर्यायी आकृतीत प्रश्नातील आकृती अंतर्भूत आहे?

DIRECTIONS: In the given question find the answer figure in which question figure is embedded.

ہدایات: دیئے گئے سوال میں جواب والی شکل دریافت کیجیئے جس میں سوال والی شکل سرایت کرگئی ہے۔

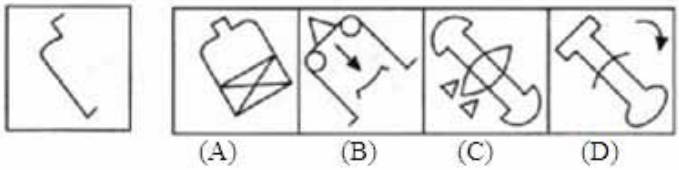

A. (A)

B. (B)

C. (C)

D. (D)

Answer: A. (A)

41

सामान्य मनुष्याची मनोवृत्ती निर्माण करण्यासाठी किंवा बदलणे प्रसारकाशी निगडत प्रभाव वापरणे हे करतात

Using media related influences to change or form the attitude of a common man is done by:

میڈیا سے متعلق اثرات کو کسی عام انسان کے رویے کو بدلنے کا عمل طے پاتا ہے_____ کے ذریعہ۔

A.शेतकरी
A.Farmers
A.کسانوں

B.राजकारणी आणि उत्पादक
B.Politicains and producers
B.سیاست دانوں اور پروڈیوسروں

C.मुले
C.Children
C.بچوں

D.यापैकी एकही नाही
D.None of these
D.ان میں سے کوئی نہیں

Answer: B.राजकारणी आणि उत्पादक
B.Politicains and producers
B.سیاست دانوں اور پروڈیوسروں

42 सूचना: हे प्रश्न खालील माहितीवर आधारित आहेत.
एका रांगेत समान अंतरावर असलेल्या सात खुर्च्या असतात. P, Q, R, S, T, U आणि V या सात व्यक्तींपैकी प्रत्येकजण वेगळ्या खुर्चीवर एकाच दिशेत बसला आहे . हे देखील ज्ञात आहे की,
(i) R च्या दोन्ही बाजूंच्या व्यक्तींची संख्या समान आहे.
(ii) Q किंवा T दोन्हीपैकी कोणीच सर्वात शेवटी नाही.
(iii) V हा S च्या उजवी कडून चार जागा दूर आहे.
(iv) P हा R च्या तत्काळ उजवीकडे आहे.
P आणि V मध्ये कोण आहे?

DIRECTIONS: These questions are based on the following information.
In a row there are seven chairs positioned at equal distances. Each one of the seven persons P, Q, R, S, T, U and V sit in a different chair facing the same direction. It is also known that,
(i) R has equal number of persons on either side of him.
(ii) Neither Q nor T is at the extreme ends.
(iii) V is four places away to the right of S.
(iv) P is to the immediate right of R.
Who is in between P and V?

ہدایات: یہ سوالات مندرجہ ذیل معلومات پر مبنی ہیں۔
P، Q، R، S، T، U اور V میں سے ہر ایک مختلف کرسی ایک قطار میں سات کرسیاں مساوی فاصلہ پر رکھی ہوئی ہیں۔ سات لوگوں پر یکساں سمت میں بیٹھتا ہے۔ یہ بھی معلوم ہے کہ،
(i)R کے دونوں طرف لوگوں کی تعداد مساوی ہے۔
(ii) Q نہ ہی T نہ تو انتہائی کنارے پر ہیں۔
(iii) S کے دائیں طرف سے V چار جگہ کی دور پر ہے
(iv) P، R کے فوری دائیں طرف ہے
P اور V کے درمیان کون ہے؟

A.Q
A.Q
A.Q

B.S
B.S
B.S

C.T
C.T
C.T

D.एकतर Q किंवा T
D.Either Q or T
D.T یا Q یا تو

Answer: D.एकतर Q किंवा T
D.Either Q or T
D.T یا Q یا تو

43

सूचना: दिलेल्या पर्यायांमधून श्रेणी पूर्ण करणारी योग्य आकृती निवडा.

DIRECTIONS: Complete the series by choosing right figure from the given choices.

ہدایات: دیئے گئے اختیارات میں سے صحیح شکل کو چن کر سلسلہ کو مکمل کیجیئے

Problem Figures

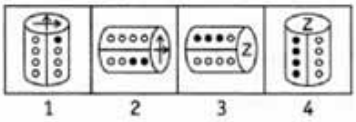

Answer Figures

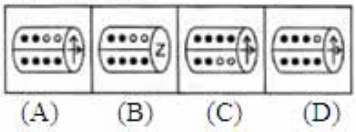

A. (A)

B. (B)

C. (C)

D. (D)

Answer: A. (A)

44 उदयाला येत असलेला --------

A.सूर्योदय

B.उद्यान

C.उदयन

D.उदयोन्मुख

Answer: D.उदयोन्मुख

45 8 आणि 32 यांच्या मधले प्रमाण शोधा.

Find the mean proportion between 8 and 32.

8 اور 32 کے درمیان درمیانہ تناسب معلوم کریں۔

A.24
A.24
A.24

B.22
B.22
B.22

C.18
C.18
C.18

D.16
D.16
D.16

Answer: D.16
D.16
D.16

46 बंध म्हणजे

Schema means

منصوبہ کا مطلب

A.चंकिंग यंत्रणा
A.Chunking mechanisms
A.ٹکرانے کا میکانزم

B.अध्ययन तंत्रे
B.Learning techniques
B.سیکھنے کی تکینی

C.दीर्घकालीन स्मृतीत साठविलेले माहितीची संघटित पुडकी
C.Organized packets of information stored in long term memory
C.طویل مدتی میموری میں معلومات کا منظم خزانہ

D.बचाव यंत्रणा
D.Defense mechanisms
D.دفاعی میکانزم

Answer: C.दीर्घकालीन स्मृतीत साठविलेले माहितीची संघटित पुडकी
C.Organized packets of information stored in long term memory
C.طویل مدتی میموری میں معلومات کا منظم خزانہ

47

सूचना: खालील आकृतीचे प्रतिबिंब शोधून काढा.

DIRECTIONS: Find the mirror image of the figure given below.

ہدایات: نیچے دیئے گئے شکل کی آئینہ معکوس شکل کیا ہوگی۔

मुख्य आकृती
Main Figure
اصل شکل

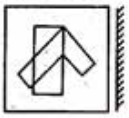

उत्तरासाठी पर्यायी आकृत्या
Answer Figure
جوابی شکل

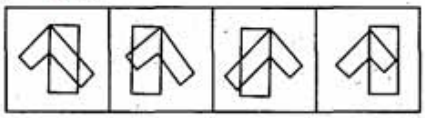

A. (A)

B. (B)

C. (C)

D. (D)

Answer: A. (A)

48 नैसर्गिक रहिवासामधून विलुप्त झालेली पण सध्या प्राणिसंग्रहालयात अस्तित्त्वात सध्या कशात गणली जाते

An animal species that is extinct in their natural habitat but are present in zoos is –

جانور کے انواع جو اپنی فطری رہائش گاہ میں ناپید ہیں لیکن چڑیا گھر میں _____ موجود ہے

A.लुप्त
A.Extinct
A.ناپید

B.मुबलक
B.Least Concern
B.کم تشویشناک انواع

C.धोकादायक पातळी जवळ
C.Near Threatened
C.خطرے کے قریب ہے

D.यांपैकी कोणतेही नाही
D.None of these
D.ان میں سے کوئی نہیں

Answer: D.यांपैकी कोणतेही नाही
D.None of these
D.ان میں سے کوئی نہیں

49 सूचना: हे प्रश्न खालील माहितीवर आधारित आहेत.
एका रांगेत समान अंतरावर असलेल्या सात खुर्च्या असतात. P, Q, R, S, T, U आणि V या सात व्यक्तींपैकी प्रत्येकजण वेगळ्या खुर्चीवर एकाच दिशेत बसला आहे . हे देखील ज्ञात आहे की,
(i) R च्या दोन्ही बाजूंच्या व्यक्तींची संख्या समान आहे.
(ii) Q किंवा T दोन्हीपैकी कोणीच सर्वात शेवटी नाही.
(iii) V हा S च्या उजवी कडून चार जागा दूर आहे.
(iv) P हा R च्या तत्काळ उजवीकडे आहे.
U आणि V च्या मध्ये किती व्यक्ती आहेत?

DIRECTIONS: These questions are based on the following information.
In a row there are seven chairs positioned at equal distances. Each one of the seven persons P, Q, R, S, T, U and V sit in a different chair facing the same direction. It is also known that,
(i) R has equal number of persons on either side of him.
(ii) Neither Q nor T is at the extreme ends.
(iii) V is four places away to the right of S.
(iv) P is to the immediate right of R.
How many persons are there in between U and V?

ہدایات: یہ سوالات مندرجہ ذیل معلومات پر مبنی ہیں۔
P، Q، R، S، T، U اور V میں سے ہر ایک مختلف کرسی ایک قطار میں سات کرسیاں مساوی فاصلہ پر رکھی ہوئی ہیں۔ سات لوگوں پر یکساں سمت میں بیٹھتا ہے۔ یہ بھی معلوم ہے کہ،
(i)R کے دونوں طرف لوگوں کی تعداد مساوی ہے۔
(ii) انتہائی کنارے پر ہیں۔ T نہ ہی Q نہ تو
(iii) S کے دائیں طرف سے V چار جگہ کی دور پر ہے
(iv) P، R کے فوری دائیں طرف ہے
U اور V کے درمیان کتنے لوگ ہیں؟

A.एक
A.One
A.ایک

B.दोन
B.Two
B.دو

C.तीन
C.Three
C.تین

D.पाच
D.Five
D.پانچ

Answer: D.पाच
D.Five
D.پانچ

50 शिक्षक केंद्रीत पद्धती कोणती आहे?

Which is the teacher-centred method?

استاد کی مرکزیت پر کونسا طریقہ مبنی ہے؟

A.स्त्रोत पद्धत
A.Source method
A.ماخذ طریقہ

B.प्रवचन पद्धत
B.Lecture method
B.لیکچر کا طریقہ

C.उपक्रम पद्धत
C.Project method
C.پروجیکٹ کا طریقہ

D.समाजीकृत पठण
D.Socialized recitation
D.سماجی پڑھائی

Answer: B.प्रवचन पद्धत
B.Lecture method
B.لیکچر کا طریقہ

51 ‘ माहेर ’ या शब्दाचा विरुद्धार्थी शब्द कोणता ?

A.अहेर

B.बाहेर

C.गुप्तहेर

D.सासर

Answer: D.सासर

52 खालीलपैकी कोणता ई-कॉमर्स मंच आहे?

Which of the following is an e-commerce platform?

درج ذیل میں سے کون ایک ای کامرس پلیٹ فارم ہے؟

A.अलीबाबा
A.Alibaba
A.علی بابا

B.गुगल
B.Google
B.گوگل

C.मायस्पेस
C.MySpace
C.مائی اسپیس

D.यांपैकी कोणतेही नाही
D.None of these
D.ان میں سے کوئی نہیں

Answer: A.अलीबाबा
A.Alibaba
A.علی بابا

53 एक काम काही कर्मचाऱ्यांद्वारे 100 दिवसांमध्ये पूर्ण केले जाऊ शकत. तरीह 10 कर्मचाऱ्यांच्या गैरहजेरीमुळे, ते 110 दिवसांत पूर्ण झाले. कामगारांची मुळ संख्या किती होती:

A work could be completed in 100 days by some workers. However, due to the absence of 10 workers, it was completed in 110 days. The original number of workers was:

ایک کام چند مزدوروں کے ذریعے 100 دنوں میں مکمل ہو سکتا تھا۔ جبکہ،10 مزدوروں کی غیر موجودگی کی وجہ سے، یہ کام 110 دنوں میں ختم ہوا۔ مزدوروں کی اصل تعداد کیا تھی؟

A.100
A.100
A.100

B.110
B.110
B.110

C.55
C.55
C.55

D.50
D.50
D.50

Answer: B.110
B.110
B.110

54 खालीलपैकी अशुद्ध शब्द कोणता ?

A.देशद्रोही

B.देशभक्त

C.स्वदेश

D.यापैकी नाही

Answer: D.यापैकी नाही

55 _____ ही अपवादात्मक सामान्य क्षमता आहे

_____ is an exceptional general ability

_____ ایک استثنائی اور عام قابلیت ہے:

A.प्रतिभा
A.Talent
A.جوہر(ٹائلنٹ)

B.प्रतिभाशाली
B.Giftedness
B.وہبی صلاحیت

C.कौशल्य
C.Skills
C.مہارت (اسکلز)

D.सृजनशीलता
D.Creativity
D.تخلیق

Answer: B.प्रतिभाशाली
B.Giftedness
B.وہبی صلاحیت

56 सूचना: प्रत्येक प्रश्नाला एक प्रमुख विधानासोबत चार विधाने आहेत ज्यांच्याखाली A, B, C, आणि D असे चार विधान आहेत. क्रमवार विधानांची जोडी निवडा ज्यामध्ये प्रथम विधान दुसऱ्या विधानाला सुचवते, आणि दोन्ही विधाने तर्किकदृष्ट्या प्रमुख विधानासोबत निगडित असेल.

तो एक अभिनेता आहे किंवा गायक आहे.
A. तो एक अभिनेता आहे.
B. तो एक अभिनेता नाही.
C. तो एक गायक आहे.
D. तो एक गायक नाही.

DIRECTIONS: Each question has a main statement followed by four statements labelled A, B, C and D. Choose the ordered pair of statements, where the first statement implies the second, and the two statements are logically consistent with the main statement.

He is either an actor or a singer.
A.He is an actor
B.He is not an actor
C.He is a singer
D.He is not a singer

ہدایت: ہر سوال میں ایک جملہ ہے جسکے بعد چار جملےاے، بی،سی اور ڈی کے نام سے دئے گئے ہیں اسمیں منسلک جوڑیوں کو چنئے۔ جہاں پہلا جملہ دوسرے جملہ کی اور اشارہ کر رہا ہے اور دو جملے منطقی مرکزی بیان کے مطابق ہیں

وہ یا تو ایکٹر ہے یا سنگر
A۔ وہ ایکٹر ہے
B۔ وہ ایکٹر نہیں ہے
C۔ وہ سنگر ہے
D۔ وہ سنگر نہیں ہے

A.AC
A.AC
A.AC

B.DA
B.DA
B.DA

C.CB
C.CB
C.CB

D.AB
D.AB
D.AB

Answer: B.DA
B.DA
B.DA

57 रू. 1550 मधील काही भाग 5% तर उर्वरित भाग 8% सरळ व्याजाने कर्जाऊ देण्यात आला. 3 वर्षांनंतर, रू. 300 व्याज मिळाले. 5% आणि 8% नी दिलेल्या भागाचे गुणोत्तर काढा.

Some part of Rs.1550 was lent at 5% and the remaining part at 8% simple interest. After 3 years, Rs.300 is earned as interest. Find the ratio of part given at 5% and 8%.

1550 ٪8 اور ٪5 کا کچھ حصہ ٪5 اور بقیہ ٪8 سود مفرد کی در سے قرضہ دیا گیا۔ 3 سال کے بعد، 300 روپیہ بطور منافہ کمایا گیا. پر دیے گیے حصہ کا تناسب معلوم کریں.

A.5 : 8
A.5 : 8
A.5 : 8

B.8 : 5
B.8 : 5
B.8 : 5

C.31 : 6
C.31 : 6
C.31 : 6

D.16 : 15
D.16 : 15
D.16 : 15

Answer: D.16 : 15
D.16 : 15
D.16 : 15

58 एका अलमारीची किंमत ₹ 6524 आहे, 15% कमी केल्यावर ती किंमत काय असेल?

The price of an Almirah is ₹ 6524, what will be its price after a reduction of 15%?

ایک الماری کی قیمت6524 روپے ہے 15. فیصد کی کمی کے بعد اس کی قیمت کیا ہو جائے گی؟

A.5545.4
A.5545.4
A.5545.4

B.5500
B.5500
B.5500

C.6000
C.6000
C.6000

D.5750
D.5750
D.5750

Answer: A.5545.4
A.5545.4
A.5545.4

59 सूचना: खालील प्रश्नांमध्ये दिलेल्या पर्यायांमधून संबंधित अक्षर/शब्द/संख्या निवडा.

5 : 26 :: 8 : ?

DIRECTIONS: In the following question, select the related letter/word/number from the given alternatives.

5 : 26 :: 8 : ?

سمت: مندرجہ ذیل سوال میں، دیے گئے متبادل سے متعلقہ حرف/لفظ/نمبر منتخب کریں۔

5 : 26 :: 8 : ?

A.64
A.64
A.64

B.65
B.65
B.65

C.66
C.66
C.66

D.67
D.67
D.67

Answer: B.65
B.65
B.65

60 समीर आपल्या घरापासून पश्चिमेकडे 10 मी. चालत गेला. नंतर तो डावीकडे वळून 5 मी. चालला. यानंतर तो त्याच्या डावीकडे वळून 10 मी. चालत गेला आणि शेवटी तो त्याच्या डावीकडे वळून 10 मी.चालला. आता तो त्याच्या सुरुवातीच्या बिंदूपासून कोणत्या दिशला आहे?

Sameer walked 10 m towards West from his house. Then he walked 5 m turning to his left. After this he walked 10 m turning to his left and in the end he walked 10 m turning to his left. In what direction is he now from his starting point?

سمیر اپنے گھر سے مغرب کی جانب 10میٹرتک چلا- پھر وہ اپنی بائیں جانب مڑ کر 5میٹر چلا- اس کے بعد وہ اپنی بائیں طرف مڑ کر 10میٹراور چلا- اور آخر میں اپنی بائیں جانب مڑ کر 10میٹر چلا- اپنی ابتدائی جگہ سے اب وہ کس سمت میں ہے؟

A.दक्षिण
A.South
A.جنوب

B.उत्तर
B.North
B.شمال

C.पूर्व
C.East
C.مشرق

D.पश्चिम
D.West
D.مغرب

Answer: B.उत्तर
B.North
B.شمال

61 एकूण कानाच्या हाडांची संख्या आहे:

The total number ear bones is

کان کی کُل کتنی ہڈیاں ہوتی ہیں

	A.2 A.2 A.2
	B.4 B.4 B.4
	C.6 C.6 C.6
	D.8 D.8 D.8
Answer:	C.6 C.6 C.6

62	गहाळ संज्ञा शोधा? Find the missing term? گمنام نمبر کیا ہے ؟ 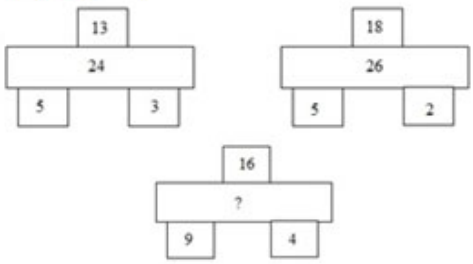
	A. 27
	B. 28
	C. 32
	D. 15
Answer:	B. 28

63	सूचना: दिलेल्या पर्यायांमधून वेगळे ते बाहेर काढा. DIRECTIONS: Find the odd one out from the given alternatives. سمت: دیے گئے متبادل میں سے بے جوڑ کو تلاش کرو۔

A.TIE
A.TIE
A.TIE

B.GUI
B.GUI
B.GUI

C.DOE
C.DOE
C.DOE

D.COW
D.COW
D.COW

Answer: D.COW
D.COW
D.COW

64 दुसऱ्या व्यक्ती किंवा वस्तूला पाहून बलपूर्वक विध्वंसक वर्तणूकीला _____असे म्हणले जाते.

Forceful destructive behavior towards another person or object

کسی دوسرے شخص یا اعتراض کے خلاف طاقتور تباہ کن رویے

A.हिंसा
A.Violence
A.تشدد

B.आक्रमक
B.Aggression
B.جارحیت

C.भीती
C.Phobia
C.فابیا

D.निराशा
D.Frustration
D.مایوسی

Answer: A.हिंसा
A.Violence
A.تشدد

65 यापैकी कोणती आकृती अलमारी, सोफा, फर्निचर दर्शवते?

Which one of the following represents Almirah, Sofa, Furniture?

الماری، سوفے، فرنیچر کی مندرجہ ذیل میں سے کون نمائندگی کرتا ہے؟

(A) 

(B) 

(C) 

(D) 

Answer: (D) 

66 उत्तम शिकवण्याची सर्वात महत्वपूर्ण विशिष्टता म्हणजे

The most important characteristics of good teaching is—

اچھی تعلیم کی سب سے اہم خاصیت یہ ہے-

A.शिकण्यासाठी स्वयं-प्रेरणेचा प्रारंभ
A.Genesis of self-motivation for learning
A.سیکھنے کے لئے خود کی حوصلہ افزائی کی ابتداء

B.लोकशाहीवादी तत्वावर आधारलेले
B.Based on democratic principles
B.جمہوریت کے اصولوں پر مبنی ہے

C.स्वरूपाने प्रगतीशील
C.Progressive in nature
C.نوعیت میں ترقی پسند

D.वरील सर्व
D.All the above
D.مذکورہ تمام

Answer: D.वरील सर्व
D.All the above
D.مذکورہ تمام

67 सूचना: प्रत्येक प्रश्नाला एक प्रमुख विधानासोबत चार विधाने आहेत ज्यांच्याखाली A, B, C, आणि D असे चार विधान आहेत. क्रमवार विधानांची जोडी निवडा ज्यामध्ये प्रथम विधान दुसऱ्या विधानाला सुचवते, आणि दोन्ही विधाने तर्किकदृष्ट्या प्रमुख विधानासोबत निगडित असेल.

जर जोरदार पाऊस आले, तर तिथे पाणी साठले जाईल
A. जोरदार पाऊस आले
B. जोरदार पाऊस आले नाही
C. पाणी साठले गेले
D. पाणी साठले गेले नाही

DIRECTIONS: Each question has a main statement followed by four statements labelled A, B, C and D. Choose the ordered pair of statements, where the first statement implies the second, and the two statements are logically consistent with the main statement.

If it rains heavily, there will be water logging.
A. it rained heavily
B. it did not rain heavily
C. there was water logging
D. there was not water logging

ہدایت: ہر سوال میں ایک جملہ ہے جسکے بعد چار جملےاے، بی،سی اور ڈی کے نام سے دئے گئے ہیں اسمیں منسلک جوڑیوں کو چنئے۔ جہاں پہلا جملہ دوسرے جملہ کی اور اشارہ کر رہا ہے اور دو جملے منطقی مرکزی بیان کے مطابق ہیں

اگر موسلادھار بارش ہوئی تو پانی جمع ہو جائے گا
Aموسلادھار بارش ہوئی ۔
Bموسلا دھار بارش نہیں ہوئی ۔
Cپانی جمع ہوا ۔
Dپانی جمع نہیں ہوا ۔

A.AC
A.AC
A.AC

B.BA
B.BA
B.BA

C.DA
C.DA
C.DA

D.CD
D.CD
D.CD

Answer: A.AC
A.AC
A.AC

68 ईसीजीचे कार्य ओळखण्यासाठी वापरले जातो

ECG is used to detect the functioning of

ای سی جی کا استعمال کس کام کاسراغ لگانے کے لئے کیا جاتا ہے

A.फुफ्फुस
A.Lung
A.پھیپھڑا

B.हृदय
B.Heart
B.قلب

C.मूत्रपिंड
C.Kidney
C.گردہ

D.मेंदू
D.Brain
D.دماغ

Answer: B.हृदय
B.Heart
B.قلب

69 6119 + 3101 + 3189 + 4642 – 9849 =?

6119 + 3101 + 3189 + 4642 – 9849 =?

6119 + 3101 + 3189 + 4642 – 9849 =?

A.6548
A.6548
A.6548

	B.2345 B.2345 B.2345
	C.7202 C.7202 C.7202
	D.4567 D.4567 D.4567
Answer:	C.7202 C.7202 C.7202
70	पुढील म्हण पूर्ण करा - '----------तशी माती.'
	A.अति
	B.गाव
	C.माणसं
	D.खाण
Answer:	D.खाण
71	2 ते 12 पर्यंतच्या सम संख्यांची सरासरी आहे: The average of even numbers from 2 to 12 is: 2 سے 12 کے بیچ کے جفت نمبرس کا اوسط ہوگا۔
	A.9 A.9 A.9
	B.1 B.1 B.1
	C.3 C.3 C.3

	D.7 D.7 D.7
Answer:	D.7 D.7 D.7
72	3 तास 40 मिनिटांना मिनिटांमध्ये रूपांतरीत करा Convert 3 hours 40 minutes into minutes? 3؟گھنٹے 40 منٹ کو منٹ میں بدلیں
	A.210 मी A.210 m A.210منٹ
	B.230 मी B.230 m B.230منٹ
	C.220 मी C.220 m C.220منٹ
	D.240 मी D.240 m D.240منٹ
Answer:	C.220 मी C.220 m C.220منٹ

73 बसला विशिष्ट वेळामध्ये विशिष्ट अंतर कापायचे आहे. जर ती 20 किमी/तास या गतीने गेली, तर ती 1 तासाने उशीरा पोहचते आणि जर ती 25 किमी/तास या गतीने गेली, तर ती 1 तास आधी पोहचते. अंतर काढा (किमी मध्ये).

A bus has to cover a certain distance in a specified time. If it moves at the speed of 20 kmph, it will get late by 1 hour and if it moves at the speed of 25 kmph, it will reach 1 hour early. Find out the distance (in km).

ایک بس نے مخصوص وقت میں ایک مخصوص فاصلے کو طےکرنا ہے۔ اگر یہ 20 کلومیٹر فی گھنٹہ کی رفتار پر چلے تو اسے 1 گھنٹہ تک دیر ہو جائے گی اور اگر یہ 25 کلومیٹر فی گھنٹہ کی رفتار سے چلے تو یہ 1 گھنٹہ پہلے ہی پہنچ جائے گی۔ فاصلہ (کلومیٹر میں) معلوم کریں۔

A.150
A.150
A.150

B.200
B.200
B.200

C.180
C.180
C.180

D.220
D.220
D.220

Answer: B.200
B.200
B.200

74 खालीलपैकी अशुद्ध वाक्य कोणते ?

A.मी गावाला गेला होता.

B.मी गावाला येणार आहे.

C.मी कधीच गावाला येणार नाही.

D.मी गावाला येऊ का ?

Answer: A.मी गावाला गेला होता.

75 पाच मुलींमध्ये किरण आणि टिना यांच्यापेक्षा मीना वजनदार आहे. टीना आणि प्रीतीपेक्षा बिना वजनाने हलकी आहे. किरण वजनाने सर्वात हलकी नाही. तर त्यांच्यातील सर्वात हलकी कोण ?

Among five girls Meena is heavier than Kiran and Tina. Beena is lighter than Tina and Preeti. Kiran is not the lightest. Who among them is the lightest?

پانچ لڑکیوں میں سے، مینا کرن اور ٹینا سے بھاری ہے. بینا ٹینا اور پریتی سے ہلکی ہے. کرن سب سے ہلکی نہیں ہے. ان میں سے کون سب سے ہلکا ہے؟

A.(1) किरण
A.Kiran
A.کرن

B.(2) बिना
B.Beena
B.بینا

C.(3 टीना
C.Tina
C.ٹینا

D.(4) अपुरी माहिती
D.Data inadequate
D.ڈیٹا ناکافی

Answer: B.(2) बिना
B.Beena
B.بینا

76 सूचना: दिलेल्या पर्यायांमधून श्रेणी पूर्ण करणारी योग्य आकृती निवडा.

DIRECTIONS: Complete the series by choosing right figure from the given choices.

ہدایات: دیئے گئے اختیارات میں صحیح شکل کا انتخاب کر کے سیریز کو مکمل کیجیئے۔

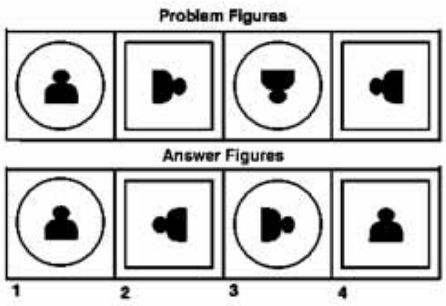

A. 1

B. 2

C. 3

D. 4

Answer: A. 1

77 सूचना: खालील प्रश्नांमध्ये दिलेल्या पर्यायांमधून संबंधित अक्षर/शब्द/संख्या निवडा.

रस्ता :बस:चालक?

DIRECTIONS: In the following question, select the related letter/word/number from the given alternatives.

Road :Bus:Driver?

سمت: مندرجہ ذیل سوال میں، دیے گئے متبادل سے متعلقہ حرف/لفظ/نمبر منتخب کریں۔

سڑک : بس: ڈرائیور؟

A.आकाश:विमान:वैमानिक
A.Sky:Aeroplane:Pilot
A.آسمان:ہوائی جہاز:پائلٹ

B.वाट:आगगाडी:प्रवास करणे
B.Track:Train:Travel
B.پٹری:ٹرین:سفر

C.देखरेख करणे:जहाज:पाणी
C.Watch:Ship:Water
C.گھڑی:جہاز:پانی

D.कागद: पेन : पेन्सिल
D.Paper:Pen:Pencil
D.کاغذ:قلم:پنسل

Answer: A.आकाश:विमान:वैमानिक
A.Sky:Aeroplane:Pilot
A.آسمان:ہوائی جہاز:پائلٹ

78 खालीलपैकी सर्वांत लहान अपूर्णांक शोधा

Find the smallest of the following fractions

مندرجہ ذیل کسور میں سے سب سے چھوٹی کسر تلاش کریں

A.18/89
A.18/89
A.18/89

B.4/13
B.4/13
B.4/13

C.72/203
C.72/203
C.72/203

D.6/29
D.6/29
D.6/29

Answer: A.18/89
A.18/89
A.18/89

79 सूचना: खालील प्रश्नांमध्ये दिलेल्या पर्यायांमधून संबंधित अक्षर/शब्द/संख्या निवडा.

साडी : ब्लाउज :: शर्ट : ?

DIRECTIONS: In the following question, select the related letter/word/number from the given alternatives.

Saree : Blouse :: Shirt : ?

سمت: مندرجہ ذیل سوال میں، دیے گئے متبادل سے متعلقہ حرف/لفظ/نمبر منتخب کریں۔

ساڑی :: بلاؤز شرٹ : ?

A.पायमोजा
A.Trouser
A.پتلون

B.काच
B.Glass
B.گلاس

C.चहा
C.Tea
C.چائے

D.कॉफी
D.Coffee
D.کافی

Answer:	A.पायमोजा A.Trouser A.پتلون

80	जर ${}^{n}P_2 = 42$, तर ${}^{n}C_4$ काढा If ${}^{n}P_2 = 42$, then find ${}^{n}C_4$. اگر nP2 = 42, تو معلوم کریں nC4۔
	A.15 A.15 A.15
	B.35 B.35 B.35
	C.45 C.45 C.45
	D.66 D.66 D.66

Answer:	B.35 B.35 B.35

81 सूचना: खाली दिलेल्या प्रश्नात एक विधान आहे ज्याचे I आणि II असे दोन निष्कर्ष त्याखाली अंकित केलेले आहेत. या आधारे सर्वात योग्य पर्याय निवडा.

विधान:
सर्व वाचक चालक आहेत आणि सर्व चालक फुटबॉलपटू आहेत. X एक चालक आहे.

निष्कर्ष:
I. X हा वाचक आहे.
II. X हा एक फुटबॉलपटू आहे.

DIRECTIONS: The question below has a statement followed by two conclusions numbered I and II. Based on this choose the option that is most suitable.

Statement:
All readers are drivers and all drivers are football players. X is a driver.

Conclusions:
I. X is reader.
II. X is a football player.

ہدایات: نیچے دیے گئے سوال میں ایک بیان کے بعد دو نتائج دیے گئے ہیں۔ اس کی بنیاد پرانتہائی موزوں آپشن کا انتخاب کیجیے۔ II اور I

بیان:
تمام قارئین ڈرائیور ہیں اور تمام ڈرائیور فٹ بال کھلاڑی ہیں. ایکس ایک ڈرائیور ہے.

نتیجے:
I. X ایک قاری ہے.
II. Xایک فٹ بال کھلاڑی ہے.

A.केवळ निष्कर्ष क्रमांक I विधानास अनुसरून आहे
A.Only Conclusion I follows
A. صرف نتیجہ I لاگو ہو گا۔

B.केवळ निष्कर्ष क्रमांक II विधानास अनुसरून आहे
B.Only Conclusions II follows
B. صرف نتیجہ II لاگو ہو گا۔

C.निष्कर्ष क्रमांक I किंवा II अनुसरून आहे
C.Either I or II follows
C. I یا II میں سے ایک لاگو ہو گا۔

D.कोणताही निष्कर्ष अनुसरून नाही
D.Neither I nor II follow
D. I اور II میں سے کوئی بھی لاگو نہیں ہو گا۔

Answer: B.केवळ निष्कर्ष क्रमांक II विधानास अनुसरून आहे
B.Only Conclusions II follows
B. صرف نتیجہ II لاگو ہو گا۔

82	प्रशिक्षण—साठी प्रदान केले जाऊ शकते The training can be imparted to— -تربیت الگ کی جا سکتی ہے
	A.शारिरीक स्नायु A.Bodily muscles A.جسمانی عضلات
	B.प्राण्यांमधील खालचा वर्ग B.Lower class of Animals B.جانوروں کا نچلا درجہ
	C.कामगार C.Workers C.کارکنان
	D.वरील सर्व D.All the above D.مذکورہ تمام
Answer:	D.वरील सर्व D.All the above D.مذکورہ تمام
83	ओसीआर म्हणजे- OCR stands for - -اوسی آر کا کیا مطلب ہوتا ہے
	A.ऑप्टिकल कॅरेक्टर रेकग्निशन A.Optical Character Recognition A.آپٹیکل کیریکٹر ریکگنیشن
	B.ऑप्टिकल सीपीयु रेकग्निशन B.Optical CPU Recognition B.آپٹیکل سی پی یو ریکگنیشن
	C.ऑप्टीमल कॅरेक्टर रेन्डेरिंग C.Optimal Character Rendering C.آپٹیکل کیریکٹر رینڈرنگ

	D.अदर कॅरेक्टररेस्टोरेशन D.Other Character Restoration D.ادر کیریکٹر رسٹوریشن
Answer:	A.ऑप्टिकल कॅरेक्टर रेकग्निशन A.Optical Character Recognition A.آپٹیکل کیریکٹر ریکگنیشن
84	पुढील जोडशब्द पूर्ण करा . 'भांडण ----------'
	A.कुदळ
	B.कांडण
	C.मांडण
	D.तंटा
Answer:	D.तंटा
85	राष्ट्रीय झेंड्याच्या लांबी आणि रूंदीचा अनुपात आहे: The ratio between the length and breadth of our National Flag is: ہمارے قومی پرچم کی لمبائی اور چوڑائی کے درمیان تناسب ہے:
	A.5:4 A.5:4 A.5:4
	B.2:3 B.2:3 B.2:3
	C.3:4 C.3:4 C.3:4
	D.1:2 D.1:2 D.1:2

Answer: B.2:3
B.2:3
B.2:3

86 मूळ आवाजा नंतर अडथळा द्वारे प्रतिबिंबित केला तर प्रतिध्वनी ऐकली जाईल:

The echo will be heard if the original sound reflected by an obstacle after:

اگر اصلی آواز کسی رکاوٹ سے ٹکرائے اور _____ میں واپسی آجائے تو گونج سنائی دے گی :

A.10 से
A.10 s
A.10 s

B.0.50 से
B.0.50 s
B.0.50 s

C.15 से
C.15 s
C.15 s

D.0.1 से
D.0.1 s
D.0.1 s

Answer: D.0.1 से
D.0.1 s
D.0.1 s

87 **एकाच फाशाच्या चार अवस्थांवरून 1 ठिपका असणाऱ्या बाजूच्या विरुद्ध बाजूवर किती ठिपके असतील ते शोधून काढा.**

From the given four positions of a single dice, find the number of dots at the face opposite to the face having 1 dot.

ہدایات: ایک پاسہ کی دی گئی چار حالتوں میں سے، ایک پاسہ کے منہ پر نقطوں کی گنتی کو دریافت کیجیئے، جس کے سامنےوالے پاسہ کے منہ پر ایک نقطہ ہے؟

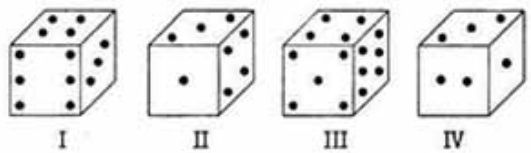

A. 1

B. 4

C. 5

D. 3

Answer: C. 5

88 सूचना: खालील प्रश्नात उत्तरातील पर्यायांपैकी कोणत्या पर्यायी आकृतीत प्रश्नातील आकृती अंतर्भूत आहे?

DIRECTIONS: In the given question find the answer figure in which question figure is embedded.

ہدایات: دیئے گئے سوال میں، جواب کی شکل کو دریافت کیجیئے جو سوال میں سرایت کر گئی ہے۔

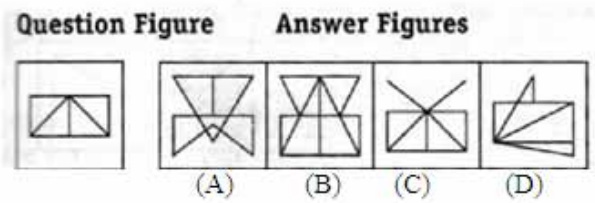

A. (A)

B. (B)

C. (C)

D. (D)

Answer: C. (C)

89 निर्देश: खालील शब्दांची इंग्रजी शब्दकोशानुसार मांडणी करा.

(a) Robber
(b) Rocket
(c) Random
(d) Restaurant
(e) Restrict

DIRECTIONS: Arrange the following words according to the English dictionary.
(a) Robber
(b) Rocket
(c) Random
(d) Restaurant
(e) Restrict

ہدایت: انگریزی لغت کے مطابق مندرجہ ذیل الفاظ کو مرتب کریں۔
(a) Robber
(b) Rocket
(c) Random
(d) Restaurant
(e) Restrict

A.(b), (e), (a), (c), (d)
A.(b), (e), (a), (c), (d)
A.(b), (e), (a), (c), (d)

B.(e), (a), (c), (d), (b)
B.(e), (a), (c), (d), (b)
B.(e), (a), (c), (d), (b)

C.(c), (e), (a), (d), (b)
C.(c), (e), (a), (d), (b)
C.(c), (e), (a), (d), (b)

D.(c), (d), (e), (a), (b)
D.(c), (d), (e), (a), (b)
D.(c), (d), (e), (a), (b)

Answer: D.(c), (d), (e), (a), (b)
D.(c), (d), (e), (a), (b)
D.(c), (d), (e), (a), (b)

90 सूचना: हे प्रश्न खालील माहितीवर आधारित आहेत.
एका रांगेत समान अंतरावर असलेल्या सात खुर्च्या असतात. P, Q, R, S, T, U आणि V या सात व्यक्तींपैकी प्रत्येकजण वेगळ्या खुर्चीवर एकाच दिशेत बसला आहे . हे देखील ज्ञात आहे की,
(i) R च्या दोन्ही बाजूंच्या व्यक्तींची संख्या समान आहे.
(ii) Q किंवा T दोन्हीपैकी कोणीच सर्वात शेवटी नाही.
(iii) V हा S च्या उजवी कडून चार जागा दूर आहे.
(iv) P हा R च्या तत्काळ उजवीकडे आहे.
जर Q हा P च्या डावीकडे तीन जागा दूर असेल तर मग P च्या तत्काळ उजवीकडे कोण आहे?

DIRECTIONS: These questions are based on the following information.
In a row there are seven chairs positioned at equal distances. Each one of the seven persons P, Q, R, S, T, U and V sit in a different chair facing the same direction. It is also known that,
(i) R has equal number of persons on either side of him.
(ii) Neither Q nor T is at the extreme ends.
(iii) V is four places away to the right of S.
(iv) P is to the immediate right of R.
If Q is three places away to the left of P, then who is to immediate right of P?

ہدایات: یہ سوالات مندرجہ ذیل معلومات پر مبنی ہیں۔
میں سے ہر ایک مختلف کرسی V اور P، Q، R، S، T، U ایک قطار میں سات کرسیاں مساوی فاصلہ پر رکھی ہوئی ہیں۔ سات لوگوں
پر یکساں سمت میں بیٹھتا ہے۔ یہ بھی معلوم ہے کہ،
(i)R کے دونوں طرف لوگوں کی تعداد مساوی ہے۔
(ii) انتہائی کنارے پر ہیں۔ T نہ ہی Q نہ تو
(iii) S کے دائیں طرف سے V چار جگہ کی دور پر ہے
(iv) P، R کے فوری دائیں طرف ہے
اگر Q، P کے فوری دائیں طرف کون ہے؟ P کے بائیں طرف سے تین جگہ کی دوری پر ہے، تو

A.T
A.T
A.T

B.V
B.V
B.V

C.S
C.S
C.S

D.Q
D.Q
D.Q

Answer: A.T
A.T
A.T

91 खालीलपैकी शुद्ध शब्द कोणता ?

A.विध्वंसक

B.विध्वांसक

C.विधवांसक

D.वरील सर्व

Answer: A.विध्वंसक

92 समताप मंडलात ओझोनमध्ये छिद्र करण्यासाठी खालीलपैकी काय जबाबदार आहे?

Which one among the following is responsible for formation of Ozone Holes in the stratosphere?

اسٹریٹو اسفئر میں مندرجہ ذیل میں سے کون اوزون سوراخ کے قیام کے لئے ذمہ دار ہے؟

A.बेंझो प्युरिन
A.Benzo pyrene
A.بینزوپائرین

B.हायड्रोकार्बन्स
B.Hydrocarbons
B. ہائڈروکاربن

C.क्लोरोफ्लूरोकार्बन्स
C.Chlorofluorocarbons
C. کلوروفلوروکاربن

D.यूव्ही विकिरण
D.UV radiation
D.یو وی تابکاری

Answer: C.क्लोरोफ्लूरोकार्बन्स
C.Chlorofluorocarbons
C. کلوروفلوروکاربن

93 मुलांमध्ये सकारात्मक वृत्तीचा विकास करण्यासाठी तुम्ही काय कराल?

What will you do in order to develop positive attitude among children?

بچوں میں مثبت رویہ پیدا کرنے کے لئے آپ کیا کریں گے؟

A.शिकवण पातळीला शिकवणे
A.Teaching at Indoctrination Level
A.انڈوکٹرینیشن سطح پر تعلیم

B.फक्त सूचना देणे
B.Only Instruction
B.صرف ہدایات

C.फक्त जुळवून घेणे
C.Only Conditioning
C.صرف کنڈیشنگ

D.फक्त प्रशिक्षण देणे
D.Only Training
D.صرف تربیت

Answer: A.शिकवण पातळीला शिकवणे
A.Teaching at Indoctrination Level
A.انڈوکٹرینیشن سطح پر تعلیم

94

8147 + 3374 – 5407 + 1177 – 2400 = ?

8147 + 3374 – 5407 + 1177 – 2400 = ?

8147 + 3374 – 5407 + 1177 – 2400 = ?

A.4891
A.4891
A.4891

B.2564
B.2564
B.2564

C.4123
C.4123
C.4123

D.7014
D.7014
D.7014

Answer: A.4891
A.4891
A.4891

95 सूचना: दिलेल्या पर्यायांमधून वेगळे ते बाहेर काढा.

DIRECTIONS: Find the odd one out from the given alternatives.

سمت: دیے گئے متبادل میں سے بے جوڑ کو تلاش کرو۔

A.नाक
A.NOSE
A.ناک

B.डोळे
B.EYES
B.آنکھیں

C.गुडघा
C.KNEE
C.گھٹنا

D.ओठ
D.LIPS
D.ہونٹ

Answer: C.गुडघा
C.KNEE
C.گھٹنا

96 निर्देश: खालीदिलेल्या अक्षराच्या क्रमात काही अक्षरे गहाळ केली आहेत ते त्या क्रमाने खाली दिलेल्या पर्यायांपैकी एक आहे

_ bca _ c _ bcab _

DIRECTIONS: In each of the following letter series, same of the letters are missing which are given in that order as one of the alternatives below it.

_ bca _ c _ bcab _

دایت جیل کے حرف سرج میں کوئی حرف گمشدہ ہے آپکو انکی شناخت جیل کے اختیارات سے کرنی ہے

_ bca _ c _ bcab _

A.abab
A.abab
A.abab

For More Info And Videos About TAIT-Exam Syllabus And Other Exam Visit My Channel
BADSHAHimp SubScribe Like & Share YouTube WWW.YouTube.com/BADSHAHimp

B.abac
B.abac
B.abac

C.abaa
C.abaa
C.abaa

D.aabc
D.aabc
D.aabc

Answer: B.abac
B.abac
B.abac

97 शिक्षण संघाची ... अशी व्याख्या केली जाऊ शकते

Team teaching can be defined as a

ٹیم کی تعلیم کو ایک --- کے طور پر بیان کیا جا سکتا ہے

A.राजकीय संघटना
A.Political organization
A.سیاسی تنظیم

B.शिक्षणात्मक संघटना
B.Instructional organization
B.زیر انتظام تنظیم میں

C.व्यवसाय संघटना
C.Business organization
C.کاروباری تنظیم

D.वरीलपैकी कोणतेही नाही
D.None of the above
D.اوپر سے کوئی بھی نہیں

Answer: B.शिक्षणात्मक संघटना
B.Instructional organization
B.زیر انتظام تنظیم میں

For More Info And Videos About TAIT-Exam Syllabus And Other Exam Visit My Channel
BADSHAHimp SubScribe Like & Share WWW.YouTube.com/BADSHAHimp

98 सूचना: हे प्रश्न खालील माहितीवर आधारित आहेत.
एका रांगेत समान अंतरावर असलेल्या सात खुर्च्या असतात. P, Q, R, S, T, U आणि V या सात व्यक्तींपैकी प्रत्येकजण वेगळ्या खुर्चीवर एकाच दिशेत बसला आहे . हे देखील ज्ञात आहे की,
(i) R च्या दोन्ही बाजूंच्या व्यक्तींची संख्या समान आहे.
(ii) Q किंवा T दोन्हीपैकी कोणीच सर्वात शेवटी नाही.
(iii) V हा S च्या उजवी कडून चार जागा दूर आहे.
(iv) P हा R च्या तत्काळ उजवीकडे आहे.
रांगेच्या कोणत्याही शेवटच्या टोकांवर कोण आहेत?

DIRECTIONS: These questions are based on the following information.
In a row there are seven chairs positioned at equal distances. Each one of the seven persons P, Q, R, S, T, U and V sit in a different chair facing the same direction. It is also known that,
(i) R has equal number of persons on either side of him.
(ii) Neither Q nor T is at the extreme ends.
(iii) V is four places away to the right of S.
(iv) P is to the immediate right of R.
Who are at either ends of the row?

ہدایات: یہ سوالات مندرجہ ذیل معلومات پر مبنی ہیں۔
P، Q، R، S، T، U اور V میں سے ہر ایک مختلف کرسی ایک قطار میں سات کرسیاں مساوی فاصلہ پر رکھی ہوئی ہیں۔ سات لوگوں پر یکساں سمت میں بیٹھتا ہے۔ یہ بھی معلوم ہے کہ،
(i)R کے دونوں طرف لوگوں کی تعداد مساوی ہے۔
(ii) نہ تو Q نہ ہی T انتہائی کنارے پر ہیں۔
(iii) S کے دائیں طرف سے V چار جگہ کی دور پر ہے
(iv) P، R کے فوری دائیں طرف ہے
قطار کے دونوں سروں پر کون ہیں؟

A.S आणि P
A.S and P
A.S اور P

B.U आणि V
B.U and V
B.U اور V

C.S आणि V
C.S and V
C.S اور V

D.U आणि S
D.U and S
D.U اور S

Answer: B.U आणि V
B.U and V
B.U اور V

For More Info And Videos About TAIT-Exam Syllabus And Other Exam Visit My Channel
BADSHAHimp SubScribe Like & Share YouTube WWW.YouTube.com/BADSHAHimp

99 खालीलपैकी कामाच्या कोणत्या वर्गीकरणामध्ये शिकवणे येते?

Teaching would come in which of the following classification of work?

تعلیم کی مندرجہ ذیل درجہ بندی میں کونسی تعلیم آتی ہے؟

A.लिपिकाचे काम
A.Clerical
A.کلریکل

B.व्यवस्थापकीय काम
B.Managerial
B.مینیجیریل

C.व्यावसायिक काम
C.Professional
C.پیشہ ورانہ

D.सर्व्हिस- नोकरी
D.Service
D.خدمات

Answer: C.व्यावसायिक काम
C.Professional
C.پیشہ ورانہ

100 सूचना: खालील प्रश्नांमध्ये दिलेल्या पर्यायांमधून संबंधित अक्षर/शब्द/संख्या निवडा.

? : ALKLO :: WOULD : TLRIA

DIRECTIONS: In the following question, select the related letter/word/number from the given alternatives.

? : ALKLO :: WOULD : TLRIA

سمت: مندرجہ ذیل سوال میں، دیے گئے متبادل سے متعلقہ حرف/لفظ/نمبر منتخب کریں۔

? : ALKLO :: WOULD : TLRIA

A.BLOCK
A.BLOCK
A.BLOCK

B.BARGE
B.BARGE
B.BARGE

C.CONES
C.CONES
C.CONES

D.DONOR
D.DONOR
D.DONOR

Answer: D.DONOR
D.DONOR
D.DONOR

101 DIRECTION:प्रश्नासाठी सूचना: खालील मालिका पूर्ण करा.

_____L, I, F, C

DIRECTION: Complete the following series.

_____L, I, F, C

سوال کے لیے ہدایت:مندرجہ ذیل سیریز کو مکمل کریں۔

_____L, I, F, C

A.Z
A.Z
A.Z

B.Y
B.Y
B.Y

C.W
C.W
C.W

D.O
D.O
D.O

Answer: D.O
D.O
D.O

102	‘ गाशा गुंडाळणे ’ या वाक्प्रचाराचा अर्थ काय ?
	A.मांझा गुंडाळणे
	B.केस गुंडाळणे
	C.निघून जाणे.
	D.विनाकारण त्रास देणे.
Answer:	C.निघून जाणे.

103	फोटोतील एका स्त्रीकडे बोट दाखवून एक पुरुष म्हणतोः “माझ्या पत्नीच्या सासूची ती एकुलती मुलगी आहे” मग त्या स्त्रीचे त्या पुरुषासोबत काय नाते आहे? Pointing to a woman in a photograph a man says: “She is the only daughter of my wife’s mother-in-law”. How is the woman related to the man? تصویر میں ایک عورت کی طرف اشارہ کرکے آدمی نے کہا:" یے میری بیوی کی ساس کا واحد بیٹا ہے ." عورت کا آدمی سے کیا رشتہ ہے؟
	A.मुलगी A.Daughter A.بیٹی
	B.पत्नी B.Wife B.بیوی
	C.मुलगी C.Sister C.بہن
	D.मेव्हणी D.Sister-in-law D.بھابی
Answer:	C.मुलगी C.Sister C.بہن

104 कोणत्या तात्त्विक विचारसरणीत असे गृहीत धरण्यात येते की जन्माचे वेळी मुलाचे मन ही “कोरी पाटी” असते?

Which philosophical view assumes that the child’s mind at birth is “blank tablet”?

کس سماجی نظرئے کے تحت تصور کیا جاتا ہے کہ پیدائش کا وقت بچے کا ذہن " خالی ٹیبلٹ" ہوتی ہے؟

A.मूळ पाप
A.original sin
A.اصلی گناہ

B.कोरी पाटी
B.tabula rasa
B.سادہ ذہن

C.नियतीवाद
C.determinism
C.جبریت

D.जन्मजात चांगुलपणा
D.innate goodness’
D.بے حد حسنیت

Answer: B.कोरी पाटी
B.tabula rasa
B.سادہ ذہن

105 **प्रश्न चिन्हाच्या (?) जागी योग्य ठरणारी आकृती अंकांनी दर्शविलेल्या चार आकृतींमधून शोधून काढा.**

Choose an appropriate figure from the four numbered figures for the place of the questions mark (?).

نشان لگی چار شکلوں میں سے، مناسب شکل کا انتخاب کرکے اسے سوالی نشان کی جگہ رکھنے کے لئے

प्रश्न आकृती
Problem Figures
سوالی شکل

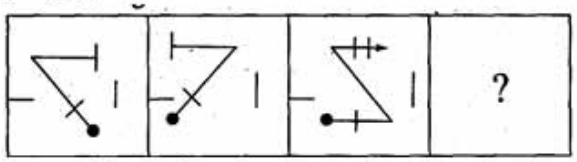

उत्तरासाठी पर्यायी आकृत्या
Answer Figure
جوابی شکل

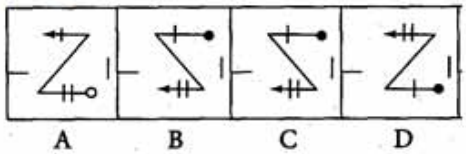

A. (A)

B. (B)

C. (C)

D. (D)

Answer: D. (D)

106 एका घनाकृतीच्या तीन अवस्था दाखविल्या आहेत. त्यांवर अवलंबून हे शोधून काढा की दिलेल्या घनाकृतीमध्ये 2 या अंकाच्या विरुद्ध बाजूला कोणता अंक असेल?

Three positions of a cube are given. Based on them, find out, which number is found opposite number 2 in a given cube?

ہدایات: ایک کیوب کی تین حالتیں دی گئی ہیں۔ ان کی بنیاد پر، دریافت کیجیئے، کونسا نمبرکیوب میں دیئے گئے 2 نمبر کی اپوسٹ ہے ؟



A. 3

B. 5

C. 1

D. 6

Answer: C. 1

107 जर $a^2+ b^2 = 234$ आणि ab = 108, a + b/a – b चे मूल्य काढा:

If $a^2+ b^2= 234$ and ab = 108, find the value of a + b/a – b

اگر $a^2+ b^2= 234$ اور ab = 108
, تو a + b/a – b کی قیمت معلوم کریں:

A.10
A.10
A.10

B.8
B.8
B.8

C.5
C.5
C.5

D.4
D.4
D.4

Answer: C.5
C.5
C.5

108 सूचना: अर्थपूर्ण परिच्छेद निर्माण करण्यासाठी, खाली दिलेली (P), (Q) (R), (S) आणि (T) ही पाच वाक्ये योग्य अनुक्रमाने पुनर्रचना करा; त्यांनतर खालील प्रश्नांची उत्तर द्या.
P. भगवान श्रीकृष्णाने सापाला वृंदावन सोडून जाण्यास सांगितले आणि पुन्हा येऊ नको असे बजावले.
Q. भगवान श्रीकृष्णाने सापासोबत लढण्याचे ठरविले ठरविले.
R. एकदा एक प्रचन्ड मोठा काळा साप येऊन यमुना नदीमध्ये राहू लागला.
S. लवकरच साप पराभूत झाला.
T. त्याच्या उपस्थितीने नदीचे पाणी विषारी बनले.

पुनर्रचना केल्यानंतर खालीलपैकी कोणते वाक्य पाचवे असेल?

DIRECTION: Rearrange the following five sentences (P), (Q), (R), (S) and (T) in the proper sequence to form a meaningful paragraph; then answer the questions given below them.
P. Lord Krishna asked the snake to leave Vrindavan and never come back.
Q. Lord Krishna decided to fight the snake.
R. Once a huge black serpent came to Vrindavan and started living in the river Yamuna.
S. Soon the snake was defeated.
T. Because of his presence, the water of the river turned poisonous.

Which of the following should be the FIFTH sentence after rearrangement?

ہدایات: ان پانچ جملوں (P)، (Q)، (R)، (S) اور (T) کو با معنی پیرا بنانے کے لئے دوبارہ ترتیب دیجئے، پھر نیچے دے گئے سوالوں کے جواب دیجئے

P. دیوتا کرشنا نے سانپ سے کہا کہ وو وریندھوں چھوڈ دے اور کبھی واپس نہ اے.
Q. دیوتا کرشنا نے فیصلہ کیا کہ وو سانپ سے لڑے گا.
E. ایک بار ایک بڑا سانپ وریندھوں میں آیا اور دریائی یمنہ میں رہنے لگا.
S. جلدی سانپ کو ہرایا گیا.
T. کیوں کہ اسکی موجود گی سے، پانی ظہر میں تبدیل ہو رہا تھا.

دوبارہ ترییب دینے کے بعد کون سا جملہ پانچوہ ہونا چاہیے؟

A.P
A.P
A.P

B.Q
B.Q
B.Q

C.S
C.S
C.S

D.T
D.T
D.T

Answer: A.P
A.P
A.P

109 ‘SUPERINTENDENT’ पासून खालील शब्दांपैकी कोणते शब्द तयार केले जाऊ शकत नाहीत?

Which of the following words can be formed from ‘SUPERINTENDENT’?

مندرجہ ذیل الفاظ میں سے کونسا ‘SUPERINTENDENT’ سے نہیں بنایا جاسکتا ہے؟

A.INTENSE
A.INTENSE
A.INTENSE

B.NURSE
B.NURSE
B.NURSE

C.DENTIST
C.DENTIST
C.DENTIST

D.DOCTOR
D.DOCTOR
D.DOCTOR

Answer: D.DOCTOR
D.DOCTOR
D.DOCTOR

110 ‘ इथून चौथा बंगला माझा आहे.’ या वाक्यातील विशेषण ओळखा.

A.इथून

B.चौथा

C.बंगला

D.माझा

Answer: B.चौथा

111 सूचना: हे प्रश्न खालील माहितीवर आधारित आहेत.
एका रांगेत समान अंतरावर असलेल्या सात खुर्च्या असतात. P, Q, R, S, T, U आणि V या सात व्यक्तींपैकी प्रत्येकजण वेगळ्या खुर्चीवर एकाच दिशेत बसला आहे . हे देखील ज्ञात आहे की,
(i) R च्या दोन्ही बाजूंच्या व्यक्तींची संख्या समान आहे.
(ii) Q किंवा T दोन्हीपैकी कोणीच सर्वात शेवटी नाही.
(iii) V हा S च्या उजवी कडून चार जागा दूर आहे.
(iv) P हा R च्या तत्काळ उजवीकडे आहे.
S आणि P मध्ये कोण आहे?

DIRECTIONS: These questions are based on the following information.
In a row there are seven chairs positioned at equal distances. Each one of the seven persons P, Q, R, S, T, U and V sit in a different chair facing the same direction. It is also known that,
(i) R has equal number of persons on either side of him.
(ii) Neither Q nor T is at the extreme ends.
(iii) V is four places away to the right of S.
(iv) P is to the immediate right of R.
Who is in between S and P?

ہدایات: یہ سوالات مندرجہ ذیل معلومات پر مبنی ہیں۔
P، Q، R، S، T، U اور V میں سے ہر ایک مختلف کرسی ایک قطار میں سات کرسیاں مساوی فاصلہ پر رکھی ہوئی ہیں۔ سات لوگوں پر یکساں سمت میں بیٹھتا ہے۔ یہ بھی معلوم ہے کہ،
(i)R کے دونوں طرف لوگوں کی تعداد مساوی ہے۔
(ii) نہ تو Q نہ ہی T انتہائی کنارے پر ہیں۔
(iii) S کے دائیں طرف سے V چار جگہ کی دور پر ہے
(iv) P، R کے فوری دائیں طرف ہے
P اور S کے درمیان کون ہے؟

A.V
A.V
A.V

B.Q
B.Q
B.Q

C.R
C.R
C.R

D.T
D.T
D.T

Answer: C.R
C.R
C.R

112 सूचना: दिलेल्या पर्यायांमधून वेगळे ते बाहेर काढा.

DIRECTIONS: Find the odd one out from the given alternatives.

سمت: دیے گئے متبادل میں سے بے جوڑ کو تلاش کرو۔

A.8
A.8
A.8

B.27
B.27
B.27

C.64
C.64
C.64

D.125
D.125
D.125

Answer: C.64
C.64
C.64

113 सूचना: या प्रश्नांमध्ये पर्याय A आणि B यांच्या सहित दोन विधाने दिलेली आहेत. जरी सामान्यपणे माहीत असलेल्या तथ्यांबरोबर जुळत नसले तरी खालील विधाने बरोबर आहेत असे समजून तुमचे योग्य उत्तर लिहा:
काही डॉक्टर्स वेडे आहेत.
काही वेडे श्रीमंत आहेत.
A: काही डॉक्टर्स श्रीमंत आहेत.
B: काही श्रीमंत डॉक्टर्स आहेत.

DIRECTION: In these questions, two statements are given, followed by two inferences A and B. Assume the statements to be true even if they are at variance with the known facts and then mark your answer as:

Some doctors are fools.
Some fools are rich.
A: Some doctors are rich.
B: Some rich are doctors.

ہدایت:ان سوالات میں، دو بیانات دیے گئے ہیں، جن کے بعد دو تجاویز A اور B دیے گئے ہیں۔ بیانات کے درست ہونے کو تسلیم کریں اگرچہ وہ عام طور پر معلوم حقائق کے برعکس ہوں اور پھر اس کے مطابق اپنا جواب نشان زد کریں:

کچھ ڈاکٹر بیوقوف ہیں۔
کچھ بیوقوف امیر ہیں۔

A: کچھ ڈاکٹر امیر ہیں۔
B: کچھ امیر ڈاکٹر ہیں۔

A.जर केवळ पर्याय (A) असल्यास.
A.If only inference (A) follows
A.صرف تجویز (A) پیروی کرتا ہے۔

B.जर केवळ पर्याय (B) असल्यास.
B.If only inference (B) follows
B.صرف تجویز (B) پیروی کرتا ہے۔

C.जर दोन्ही पर्याय (A) आणि (B) असल्यास.
C.If both (A) and (B) follow
C.(A) اور (B) دونوں پیروی کرتے ہیں۔

D.जर दोन्ही पर्याय (A) आणि (B) नसल्यास.
D.If neither (A) nor (B) follows
D.نہ تو (A) نہ ہی (B) پیروی کرتے ہیں۔

Answer: D.जर दोन्ही पर्याय (A) आणि (B) नसल्यास.
D.If neither (A) nor (B) follows
D.نہ تو (A) نہ ہی (B) پیروی کرتے ہیں۔

114	"भारतीय असंतोषाचे जनक" कोणाला म्हटले जाते? Who is called “the father of Indian Unrest”? کس کو "ہندوستانی بدامنی کے والد" کہا جاتا ہے؟
	A.लाला लाजपत राय A.Lala Lajpat Rai A.لا لاجپت رائے
	B.बाळ गंगाधर टिळक B.Bal Gangadhar Tilak B.بال گنگا دھر تلک
	C.गोविंद वल्लभ पंत C.Govind Ballabh Pant C.گوند بلبھ پنت
	D.गोपाळ कृष्ण गोखले D.Gopal Krishna Gokhale D.گوپال کرشنا گوکھلے
Answer:	B.बाळ गंगाधर टिळक B.Bal Gangadhar Tilak B.بال گنگا دھر تلک

115 सूचना: अर्थपूर्ण परिच्छेद निर्माण करण्यासाठी, खाली दिलेली (P), (Q) (R), (S) आणि (T) ही पाच वाक्ये योग्य अनुक्रमाने पुनर्रचना करा; त्यांनतर खालील प्रश्नांची उत्तर द्या.
P. भगवान श्रीकृष्णाने सापाला वृंदावन सोडून जाण्यास सांगितले आणि पुन्हा येऊ नको असे बजावले.
Q. भगवान श्रीकृष्णाने सापासोबत लढण्याचे ठरविले ठरविले.
R. एकदा एक प्रचन्ड मोठा काळा साप येऊन यमुना नदीमध्ये राहू लागला.
S. लवकरच साप पराभूत झाला.
T. त्याच्या उपस्थितीने नदीचे पाणी विषारी बनले.

पुनर्रचना केल्यानंतर खालीलपैकी कोणते वाक्य पहिले असेल?

DIRECTION: Rearrange the following five sentences (P), (Q), (R), (S) and (T) in the proper sequence to form a meaningful paragraph; then answer the questions given below them.
P. Lord Krishna asked the snake to leave Vrindavan and never come back.
Q. Lord Krishna decided to fight the snake.
R. Once a huge black serpent came to Vrindavan and started living in the river Yamuna.
S. Soon the snake was defeated.
T. Because of his presence, the water of the river turned poisonous.

Which of the following should be the FIRST sentence after rearrangement?

ہدایات: ان پانچ جملوں (P)، (Q)، (R)، (S) اور (T) کو با معنی پیرا بنانے کے لئے دوبارہ ترتیب دیجئے، پھر نیچے دے گئے سوالوں کے جواب دیجئے
P. دیوتا کرشنا نے سانپ سے کہا کہ وو وریندھوں چھوڈ دے اور کبھی واپس نہ اے.
Q. دیوتا کرشنا نے فیصلہ کیا کہ وو سانپ سے لڑے گا.
E. ایک بار ایک بڑا سانپ وریندھوں میں آیا اور دریائی یمنہ میں رہنے لگا.
S. جلدی سانپ کو ہرایا گیا.
T. کیوں کہ اسکی موجود گی سے، پانی ظہر میں تبدیل ہو رہا تھا.

دوبارہ ترییب دینے کے بعد کون سا جملہ پہلے ہونا چاہیے؟

A.R
A.R
A.R

B.P
B.P
B.P

C.Q
C.Q
C.Q

D.S
D.S
D.S

Answer: A.R
A.R
A.R

116 ‘ रात्र ’ या शब्दाचा समानार्थी शब्द कोणता ?

A.यामिनी

B.दामिनी

C.कामिनी

D.स्वामिनी

Answer: A.यामिनी

117 शिकवण्याची अनौपचारिक पद्धत—साठी आवश्यक आहे

The Informal mode of teaching is required for—

تعلیم کے غیر رسمی موڈ کے لئے ضروری ہے-

A.निरक्षर – त्यांना साक्षर बनवण्यासाठी
A.Illiterates-to make them literate
A.ان پڑھ کو تعلیم دینے کے لئے

B.नव-साक्षरांसाठी
B.Neo-literates
B.نو معلم

C.शाळा सोडून दिलेले
C.Drop-outs from school
C.اسکول سے فارغ التحصیل

D.वरील सर्व
D.All the above
D.مذکورہ تمام

Answer: D.वरील सर्व
D.All the above
D.مذکورہ تمام

118	रेन्मिन्बी हे यांचे चलन आहे – Renminbi is the currency of – رینمینی کس ملک کی کرنسی ہے
	A.रशिया A.Russia A.روس
	B.जपान B.Japan B.جاپان
	C.व्हिएतनाम C.Vietnam C.ویتنام
	D.चीन D.China D.چین
Answer:	D.चीन D.China D.چین

119 सूचना : खालील प्रत्येक प्रश्नात दोन विधाने I आणि II दिलेले आहेत. हे विधान एकतर स्वतंत्र कारण असू शकतात किंवा स्वतंत्र कारणांचे परिणाम असू शकतात. यांपैकी एक विधान इतर विधानाचा परिणाम असू शकतो. दोन्ही विधाने वाचा आणि खालीलपैकी कोणत्या उत्तराचा पर्याय या दोन्ही विधानांमधील संबंधांचे वर्णन करतो ते ठरवा.

विधान :
I. दुष्काळग्रस्त राज्यात आत्महत्यांची संख्या वाढत आहे.
II. दुष्काळग्रस्त राज्य सरकाराने प्रभावीत लोकांना देण्यात येणारी भरपाई वाढवली आहे.

DIRECTIONS: Below in each question are given two statements I and II. These statements may be either independent causes or may be effects of independent causes. One of these statements may be the effect of the other statement. Read both the statements and decide which of the following answer choice correctly depicts the relationship between these two statements.

Statements:
I. The number of suicides is increasing in famine affected state.
II. The government of famine affected state has increased the compensation paid to affected people.

ہدایات: نیچے ہر سوال میں دو بیانات I اور II دیے گئے ہیں۔ ان بیانات یا تو آزاد وجوہات کے اثرات ہو سکتے ہیں۔ یہ بیانات میں سے ایک بیان دوسرے کا اثر ہو سکتا ہے۔دونوں بیانات پڑھیں اور فیصلہ کریں کہ نیچے دیے گئے کس جواب کا انتخاب ان دونوں بیانات کے در میان تعلق کو ٹھیک سے ظاہر کرتا ہے۔

بیانات:
I – قحط سے متاثرہ ریاست میں خودکشیوں کی تعداد میں اضافہ ہو رہا ہے۔
II ۔ قحط سے متاثرہ ریاست کی حکومت نے متاثرہ افراد کو دیے جانے والے معاوضے میں اضافہ کر دیا ہے۔

A.विधान I कारण आहे आणि विधान II त्याचा परिणाम आहे;
A.Statement I is the cause and statement II is its effect;
A.بیان نمبر I وجہ ہے اور بیان نمبر II اس کا اثر ہے۔

B.विधान II कारण आहे आणि विधान I त्याचा परिणाम आहे;
B.Statement II is the cause and statement I is its effect;
B.بیان نمبر II وجہ ہے اور بیان نمبر I اس کا اثر ہے۔

C.विधान I आणि II दोन्ही स्वतंत्र कारणे आहेत;
C.Both the statements I and II are independent causes;
C.دونوں بیانات نمبر I اور نمبر II آزاد وجوہات ہیں۔

D.विधान I आणि II दोन्ही स्वतंत्र कारणांचे परिणाम आहेत;
D.Both the statements I and II are effects of independent causes;
D. دونوں بیانات نمبر I اور نمبر II آزاد وجوہات کے اثرات ہیں۔

Answer: A.विधान I कारण आहे आणि विधान II त्याचा परिणाम आहे;
A.Statement I is the cause and statement II is its effect;
A.بیان نمبر I وجہ ہے اور بیان نمبر II اس کا اثر ہے۔

120 DIRECTIONS: A sentence with an underlined word is given below. Find the Word which is most similar in meaning to the underlined word.
The hospitable couple was happy to accommodate the needs of their finicky guest.

A.Friendly

B.Uninviting

C.Unfriendly

D.Unwelcoming

Answer: A.Friendly

121 Q पश्चिमेला 20 मीटर चालत गेला, डावीकडे वळला आणि 20 मीटर चालला. तो पुन्हा डावीकडे वळला आणि 20 मीटर चालला आणि पुन्हा उजवीकडे वळून 20 मीटर चालला. तर आता Q सुरुवातीच्या ठिकाणापासून किती दूर आहे?

Q walked 20 metres towards West, took a left turn and walked 20 metres. He again took a left turn and walked 20 metres and then took a right turn and walked 20 metres. How far is Q now from the starting point?

Q مغرب کی طرف 20 میٹر چلا، بائیں مڑا اور 20 میٹر چلا۔ وہ دوبارہ بائیں مڑا اور 20 میٹر چلا اور پھر دائیں مڑا اور 20 میٹر چلا۔ اب Q شروعاتی نقطہ سے کتنی دور ہے؟

A.40 मीटर
A.40 metres
A.40 میٹر

B.50 मीटर
B.50 metres
B. 50 میٹر

C.80 मीटर
C.80 metres
C.80 میٹر

D.अपुरी माहिती
D.Data inadequate
D. ڈیٹا کافی نہیں ہے

Answer: A.40 मीटर
A.40 metres
A.40 میٹر

122	खालीलपैकी स्त्रीलिंगी शब्द ओळखा.
	A.ज्वारी
	B.बाजरी
	C.नाचणी
	D.वरील सर्व
Answer:	D.वरील सर्व

123	DIRECTIONS: A sentence with an underlined phrasal verb is given below. Out of the four options, choose the one which can be substituted for the given phrasal Verb. He is getting on very well with his friends.
	A.having a harmonious relationship
	B.in opposition
	C.having conflicting interests
	D.having varying interests
Answer:	A.having a harmonious relationship

124	**सूचना: दिलेल्या चारांपैकी वेगळी (असंबद्ध) असणारी आकृती शोधून काढा.** **DIRECTIONS:** Find the odd figure from the given four figures. ہدایات: دی گئی شکلوں میں سے طاق چنیے۔ 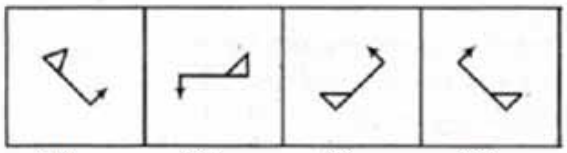 (A) (B) (C) (D)
	A. (A)
	B. (B)
	C. (C)

D. (D)

Answer: B. (B)

125 _____ हा सर्वात लोकप्रिय इंटरनेट उपक्रम आहे.

_____ is the most popular internet activity.

_____ سب سے مقبول انٹرنیٹ سرگرمی ہے۔

A.कला
A.Art
A.آرٹ

B.खरेदी
B.Shopping
B.خریداری

C.शोधक
C.Searching
C.تلاش

D.आदानप्रदान
D.Communication
D.مواصلات

Answer: D.आदानप्रदान
D.Communication
D.مواصلات

126 कंपन पावणाऱ्या तारांच्या वर्तनाच्या अभ्यासासाठी वापरलेले साधन आहे:

Instrument used to study the behavior of a vibrating string is:

ہلنے والی ڈوری کا برتاو کا مطالعہ کرنے کے لئے کس آلہ کا استعمال کیا جاتا ہے:

A.हाइग्रोमीटर
A.Hygrometer
A.رطوبت پیما

B.सोनोमीटर
B.Sonometer
B.سونومیٹر

C.बॅरोमीटर
C.Barometer
C.بارومیٹر

D.हायड्रोमीटर
D.Hydrometer
D.ہائڈرومیٹر

Answer: B.सोनोमीटर
B.Sonometer
B.سونومیٹر

127 जीएसटी ही _____यामधील सुधारणा आहे

GST is a reform in –

جی ایس ٹی انمے سے کسی قسم ہے

A.उत्पन्न कर आकारणी
A.Income Taxation
A.انکم ٹیکسیشن

B.कॉर्पोरेट कर आकारणी
B.Corporate Taxation
B.کارپوریٹ ٹیکسیشن

C.रोखे व्यवहार कर आकारणी
C.Securities Transaction Taxation
C.سیکیورٹی ٹرانزیکشن ٹیکسیشن

D.अप्रत्यक्ष कर आकारणी
D.Indirect Taxation
D.غیر راست ٹیکسیشن

Answer: D.अप्रत्यक्ष कर आकारणी
D.Indirect Taxation
D.غیر راست ٹیکسیشن

128 सूचना: अर्थपूर्ण परिच्छेद निर्माण करण्यासाठी, खाली दिलेली (P), (Q) (R), (S) आणि (T) ही पाच वाक्ये योग्य अनुक्रमाने पुनर्रचना करा; त्यांनतर खालील प्रश्नांची उत्तर द्या.
P. भगवान श्रीकृष्णाने सापाला वृंदावन सोडून जाण्यास सांगितले आणि पुन्हा येऊ नको असे बजावले.
Q. भगवान श्रीकृष्णाने सापासोबत लढण्याचे ठरविले ठरविले.
R. एकदा एक प्रचन्ड मोठा काळा साप येऊन यमुना नदीमध्ये राहू लागला.
S. लवकरच साप पराभूत झाला.
T. त्याच्या उपस्थितीने नदीचे पाणी विषारी बनले.

पुनर्रचना केल्यानंतर खालीलपैकी कोणते वाक्य दुसरे असेल?

DIRECTION: Rearrange the following five sentences (P), (Q), (R), (S) and (T) in the proper sequence to form a meaningful paragraph; then answer the questions given below them.
P. Lord Krishna asked the snake to leave Vrindavan and never come back.
Q. Lord Krishna decided to fight the snake.
R. Once a huge black serpent came to Vrindavan and started living in the river Yamuna.
S. Soon the snake was defeated.
T. Because of his presence, the water of the river turned poisonous.

Which of the following should be the SECOND sentence after rearrangement?

ہدایات: ان پانچ جملوں (P)، (Q)، (R)، (S) اور (T) کو با معنی پیرا بنانے کے لئے دوبارہ ترتیب دیجئے، پھر نیچے دے گئے سوالوں کے جواب دیجئے

P. دیوتا کرشنا نے سانپ سے کہا کہ وو وریندھوں چھوڈ دے اور کبھی واپس نہ اے.
Q. دیوتا کرشنا نے فیصلہ کیا کہ وو سانپ سے لڑے گا.
E. ایک بار ایک بڑا سانپ وریندھوں میں آیا اور دریائی یمنہ میں رہنے لگا.
S. جلدی سانپ کو ہرایا گیا.
T. کیوں کہ اسکی موجود گی سے، پانی ظہر میں تبدیل ہو رہا تھا.

دوبارہ ترییب دینے کے بعد کون سا جملہ دوسرا ہونا چاہیے؟

A.T
A.T
A.T

B.P
B.P
B.P

C.S
C.S
C.S

D.R
D.R
D.R

Answer: A.T
A.T
A.T

129 DIRECTIONS: A sentence with an underlined phrasal verb is given below. Out of the four options, choose the one which can be substituted for the given phrasal Verb.
We had to break open the main door because the keys got misplaced by someone.

A.destroy

B.construct

C.burn

D.open with force

Answer: D.open with force

130 निर्देश: खालील प्रश्न दिलेल्या शब्दांवर आधारित आहेत.

FEST/ LACK/ WORK/ RUSH/ FILM

सर्व शब्दांची उजवीकडून डावीकडील क्रमाने मांडणी केली असल्यास त्याच्या मूळ स्थानवर किती शब्द राहतील?

DIRECTIONS: Following question is based on the given words.

FEST/ LACK/ WORK/ RUSH/ FILM

If all the words are arranged in dictionary order from right to left, then how many words will remain in its original positions?

ہدایت جیل کے سوال دے ہے لفجونپر مشتمل ہیں

FEST/ LACK/ WORK/ RUSH/ FILM

اگر ان لفجونکو سیدھے ہاتھ سے الٹے ہاتھ تکلغت کے جیسا لگاتے ہیں تو کتنے لفج اپنے بنیادی جگہ پر رہینگے

A.0
A.0
A.0

B.3
B.3
B.3

C.2
C.2
C.2

D.4
D.4
D.4

Answer: A.0
A.0
A.0

131 सूचनाः यापैकी कोणती आकृती गाय, प्राणी आणि शेळी यांच्या दरम्यानचे नाते दर्शवते?

DIRECTIONS: Which one of the following diagrams represents the relationships between Cow, Animal and Goat?

ہدایات: مندرجہ ذیل ڈایاگراموں میں سے کون سی ایک، گائے، جانوراور بکرے کے درمیان تعلقات کی نمائندگی کرتی ہے؟

(A) 

(B) 

(C) 

(D) 

Answer: (A) 

132 सनीपेक्षा अनिल उंच असून बाबीपेक्षा लहान आहे. सनीपेक्षा बोस लहान असून त्याच्यापेक्षा अनिल उंच आहे. बाबी हा अनिलपेक्षा लहान आहे. तर सर्वात लहान कोण ?

Anil is taller than Sunny who is shorter than Baby. Anil is taller than Bose who is shorter than Sunny. Baby is shorter than Anil. Who is the shortest?

انیل سنی سے لمبھا ہے جو بیبی سے چھوٹا ہے.انیل بوس سے لمبھا ہے جو سنی سے چھوٹا ہے.بیبی انیل سے چھوٹا ہے.سب سے چھوٹا کون ہے؟

A.(a) अनिल
A.Anil
A.انیل

B.(b) बाबी
B.Baby
B.بیبی

C.(c) सनी
C.Sunny
C.سنی

D.(d) बोस
D.Bose
D.بوس

Answer: D.(d) बोस
D.Bose
D.بوس

133 शिकवणे आणि शिकणे यामधील संबंध म्हणजे

The relationship between teaching and learning is—

-تعلیم اور تدریس کے درمیان تعلق ہے

A.शिकवणे—शिकणे—या दोन अधिक केलेल्या प्रक्रिया शिक्षणाला अधिक प्रभावी बनवतात
A.Teaching—learning—the addition of these two processes makes learning more effective
A.درس و تدریس - یہ دو کام طریقے سے سیکھنے کے عمل کو مزید مؤثر بناتے ہیں

B.शिक्षण सिद्धांतांचे अधिक महत्व म्हणजे शिकवण्याच्या सिद्धांताचा विकास
B.The more significance of learning theories the development of teaching theories
B.نظریات کو سیکھنے کی زیادہ اہمیت تدریس کےنظریات کی ترقی

C.शिकवणे ही एक उद्देशात्मक प्रक्रिया आहे जी उचित शिकण्याकडे पोहोचते
C.Teaching is a purposive process which reaches at adequate learning
C.تدریس ایک قائل کرنے والا عمل ہے جو کافی سیکھنے میں پہنچتا ہے

D.वरील सर्व
D.All the above
D.مذکورہ تمام

Answer: D.वरील सर्व
D.All the above
D.مذکورہ تمام

134	A sentence with an underlined idiomatic expression is given. What is the meaning of the idiomatic expression ‘Bury head in the sand’ in the sentence given below? You've got to face facts here - you can't just bury your head in the sand.
	A.To avoid a particular situation by pretending that it does not exist.
	B.To go to a dry and arid part of the country
	C.To take a head massage
	D.None of the above
Answer:	A.To avoid a particular situation by pretending that it does not exist.

135	सूचना: दिलेल्या पर्यायांमधून वेगळे ते बाहेर काढा. DIRECTIONS: Find the odd one out from the given alternatives. سمت: دیے گئے متبادل میں سے بے جوڑ کو تلاش کرو۔
	A.सल्ला A.Advice A.مشورہ
	B.मसलत B.Counsel B.مشورہ کرنا
	C.सुचवणे C.Suggest C.رائے دینا
	D.निर्णय D.Decision D.فیصلہ
Answer:	D.निर्णय D.Decision D.فیصلہ

136 सूचना: अर्थपूर्ण परिच्छेद निर्माण करण्यासाठी, खाली दिलेली (P), (Q) (R), (S) आणि (T) ही पाच वाक्ये योग्य अनुक्रमाने पुनर्रचना करा; त्यांनतर खालील प्रश्नांची उत्तर द्या.
P. भगवान श्रीकृष्णाने सापाला वृंदावन सोडून जाण्यास सांगितले आणि पुन्हा येऊ नको असे बजावले.
Q. भगवान श्रीकृष्णाने सापासोबत लढण्याचे ठरविले ठरविले.
R. एकदा एक प्रचन्ड मोठा काळा साप येऊन यमुना नदीमध्ये राहू लागला.
S. लवकरच साप पराभूत झाला.
T. त्याच्या उपस्थितीने नदीचे पाणी विषारी बनले.

पुनर्रचना केल्यानंतर खालीलपैकी कोणते वाक्य चौथे असेल?

DIRECTION: Rearrange the following five sentences (P), (Q), (R), (S) and (T) in the proper sequence to form a meaningful paragraph; then answer the questions given below them.
P. Lord Krishna asked the snake to leave Vrindavan and never come back.
Q. Lord Krishna decided to fight the snake.
R. Once a huge black serpent came to Vrindavan and started living in the river Yamuna.
S. Soon the snake was defeated.
T. Because of his presence, the water of the river turned poisonous.

Which of the following should be the FOURTH sentence after rearrangement?

ہدایات: ان پانچ جملوں (P)، (Q)، (R)، (S) اور (T) کو با معنی پیرا بنانے کے لئے دوبارہ ترتیب دیجئے، پھر نیچے دے گئے سوالوں کے جواب دیجئے

P. دیوتا کرشنا نے سانپ سے کہا کہ وو وریندھوں چھوڈ دے اور کبھی واپس نہ اے.
Q. دیوتا کرشنا نے فیصلہ کیا کہ وو سانپ سے لڑے گا.
E. ایک بار ایک بڑا سانپ وریندھوں میں آیا اور دریائی یمنہ میں رہنے لگا.
S. جلدی سانپ کو ہرایا گیا.
T. کیوں کہ اسکی موجود گی سے، پانی ظہر میں تبدیل ہو رہا تھا.

دوبارہ ترییب دینے کے بعد کون سا جملہ چوتھا ہونا چاہیے؟

A.S
A.S
A.S

B.P
B.P
B.P

C.Q
C.Q
C.Q

D.R
D.R
D.R

Answer: A.S
A.S
A.S

137 हवेमध्ये ध्वनीची गती किती असते?

What is the speed of sound in air?

ہوا میں آواز کی کیا رفتار ہوتی ہے؟

A.350एम/एस
A.350m/s
A.350 منٹ/ سیکنڈ

B.400एम/एस
B.400m/s
B.400 منٹ/ سیکنڈ

C.343एम/एस
C.343m/s
C.343 منٹ/ سیکنڈ

D.320एम/एस
D.320m/s
D.320 منٹ/ سیکنڈ

Answer: C.343एम/एस
C.343m/s
C.343 منٹ/ سیکنڈ

138 सूचना: खाली दिलेल्या विधान(A) आणि कारण (R) साठी, खालील पैकी योग्य पर्याय निवडा:

विधान (A): युनायटेड स्टेट्स ऑफ अमेरिकेवरील आक्रमणानंतर प्रथम खाडीचे युद्ध सुरू झाले.
कारण (R): दहशतवादी हल्ल्यात जुळ्या व्यापारी टॉवर उध्वस्त झाले.

DIRECTION: For the Assertion (A) and Reason (R) given below, choose the correct alternative from the following:

Assertion (A): Attack on United States of America resulted in the starting of First Gulf War.

Reason (R): The twin trade towers were destroyed in militant attack.

ہدایت: نیچے دئیے گئے اسرشن (A) اور وجہ (R) کے لئے، مندرجہ ذیل میں سے صحیح متبادل منتخب کریں:

اسرشن (A): ریاستہائے متحدہ امریکہ پر حملے کے نتیجہ میں پہلی خلیج جنگ کی شروعات ہوئی۔
وجہ (R): انتہا پسندی کے حملہ میں ٹوین ٹریڈ ٹاورز کو تباہ کیا گیا تھا۔

A.दोन्ही (A) आणि (R) सत्य आहेत आणि (R) (A) च योग्य स्पष्टीकरण आहे
A.Both (A) and (R) are true and (R) is the correct explanation of (A)
A. (A) اور (R) دونوں صحیح ہیں اور (R) (A) کی درست وضاحت ہے

B.दोन्ही (A)आणि (R) खरे आहेत, परंतु (R) (A) च योग्य स्पष्टीकरण नाही
B.Both (A) and (R) are true, but (R) is not the correct explanation of (A)
B. (A) اور (R) دونوں صحیح ہیں، لیکن (R) (A) کی درست وضاحت نہیں ہے

C.(A) सत्य आहे, परंतु (R) खोटे आहे
C.(A) is true, but (R) is false
C. (A) صحیح ہے، لیکن (R) غلط ہے

D.(A) खोटे आहे, परंतु (R) सत्य आहे
D.(A) is false, but (R) is true
D. (A) غلط ہے، لیکن (R) صحیح ہے

Answer: D.(A) खोटे आहे, परंतु (R) सत्य आहे
D.(A) is false, but (R) is true
D. (A) غلط ہے، لیکن (R) صحیح ہے

139 200 लिटर पेट्रोल असलेल्या पेट्रोलच्या टाकीमध्ये, विक्रेता प्रत्येकवेळी 40 लिटर पेट्रोल (किंवा त्याचे मिश्रण) विक्री केल्यानंतर त्यामध्ये तेवढेच केरोसीन मिसळतो. दरवेळी तो फक्त 40 लिटर पेट्रोल (शुध्द किंवा अशुध्द) विक्री करतो. 4 थ्या वेळी पेट्रोलच्या जागी केरोसीन टाकल्यानंतर, मिश्रणामधील एकूण केरोसीनचे प्रमाण काय असेल

From a tank of petrol, which contains 200 liters of petrol, the seller repalce each time with kerosene when he sells 40 liters of petrol (or its mixture). Everytime he sells out only 40 liters of petrol(pure or impure). After replacing the petrol with kerosene 4th time, the total amount of kerosene in the mixture is

پٹرول کے ایک ٹینکر، جس میں 200 لیٹر پٹرول ہے، اسے بیچنے والا جب بھی40 لیٹر پٹرول (یا اس کا مرکب) فروخت کرتا ہے تو ہر بار مٹی کے تیل کے ساتھ تبدیل کر لیتا ہے۔ ہر بارجب وہ صرف 40 لیٹر پٹرول(خالص یا غیر خالص) فروخت کرتا ہے چوتھی مرتبہ مٹی کے تیل کے ساتھ پیٹرول کو تبدیل کرنے کے بعد، مرکب میں مٹی کے تیل کی مجموعی مقدار کیا ہے۔

A.81.92 लिटर
A.81.92 liter
A.81.92 لیٹر

B.96 लिटर
B.96 liter
B.96 لیٹر

C.118.08 लिटर
C.118.08 liter
C.118.08 لیٹر

D.यांपैकी कोणतेही नाही
D.None of these
D.ان میں کوئی نہیں

Answer: C.118.08 लिटर
C.118.08 liter
C.118.08 لیٹر

140 $\sqrt{0.01} + \sqrt{1.21} + \sqrt{0.09}$ ची बेरीज आहे

The total of $\sqrt{0.01} + \sqrt{1.21} + \sqrt{0.09}$ is

$\sqrt{0.01} + \sqrt{1.21} + \sqrt{0.09}$ کا میزان ہے

A. 2.1

B. 1.5

C. 2.3

D. 1.1

Answer:	B. 1.5

141	_____ हा एक समाजासाठी अभिशाप आहे. _____ is a curse on the society _____ سماج کے حق میں ایک لعنت ہے۔
	A.मद्यातीरिक A.Alcoholism A.شراب نوشی
	B.विध्वंसक वृत्ती B.Vandalism B.تشدد
	C.दारिद्र C.Poverty C.غریبی
	D.औषधांचे व्यसन D.Drug addiction D.منشیات کی لت
Answer:	C.दारिद्र C.Poverty C.غریبی

142	जर E = 5 आणि TEA = 26 तर?= TEACHER If E = 5 and TEA = 26 then TEACHER=? TEACHER=? ہو تو TEA = 26 اور E = 5 اگر
	A. 75
	B. 59
	C. 60
	D. 75
Answer:	C. 60

143	Out of the given options, choose the one which is the correct active voice of the sentence given below. The firewood is being cut by the Labourers.
	A.The Labourers is cutting the firewood.
	B.The Labourers are cutting the firewood.
	C.The Labourers has been cutting the firewood.
	D.The Labourers has cut the firewood.
Answer:	B.The Labourers are cutting the firewood.

144	मृगतृष्णा हे याचे उदाहरण आहे- The Mirage is an example of— Mirage(کا ایک مثال ہے کس (فریب نظری)--
	A.केवळ प्रकाशाच्या परावर्तनाचे A.Only Reflection of Light A.صرف روشنی کے عکس کا
	B.प्रकाशाच्या एकूण अंतर्गत प्रतिबिंबाचे B.Total Internal Reflection of Light B.کل اندرونی روشنی کا عکس
	C.प्रकाशाच्या पांगापांगीचे C.Dispersion of Light C.روشنی کا بکھراو
	D.अपवर्तन आणि प्रकाशाच्या एकूण अंतर्गत प्रतिबिंबाचे D.Refraction and total internal reflection of light D.بکھراو اور روشنی کا کل اندرونی عکس
Answer:	B.प्रकाशाच्या एकूण अंतर्गत प्रतिबिंबाचे B.Total Internal Reflection of Light B.کل اندرونی روشنی کا عکس

145 भारत _____यांच्यासोबत जलसीमा सामाईक करतो –

India shares its water borders with –

_____ کے ساتھ ہندوستان اپنے آبی حدود کی شراکت کرتا ہے

A.श्रीलंका
A.Sri Lanka
A.سری لنکا

B.मालदिव
B.Maldives
B.مالدیپ

C.हे दोन्ही
C.Both of these
C.ان میں سے دونوں

D.श्रीलंका आणि मॉरिशस
D.Sri Lanka and Mauritius
D.سری لنکا اور ماریشس

Answer:
C.हे दोन्ही
C.Both of these
C.ان میں سے دونوں

146 जर महिन्याचा 3रा दिवस मंगळवार असेल, तर त्या महिन्याच्या 23 तारेखेपासून 6 दिवसांनी खालीलपैकी कोणता वार असेल?

If the 3rd day of a month is Tuesday, which of the following will be the 6th day from 23rd of that month?

اگر کسی مہینہ کی 3 تاریخ کو منگل ہو تو مہینے کے کون سے دن اس مہینہ کی 23 تاریخ سے چھٹا دن ہوگا

A.रविवार
A.Sunday
A.اتوار

B.शनिवार
B.Saturday
B.سنیچر

C.गुरूवार
C.Thursday
C.جمعرات

D.शुक्रवार
D.Friday
D.جمعہ

Answer: A.रविवार
A.Sunday
A.اتوار

147 समभुज त्रिकोणाचे क्षेत्रफळ $400\sqrt{3}$ मी^{2}. त्याची परिमिती काय असेल?
The area of an equilateral triangle is $400\sqrt{3}$ m^2. What is its perimeter?
ایک متساوی الاضلاع مثلث کا رقبہ $400\sqrt{3}$ مربع میٹر ہے۔ تو اسکا احاطہ کیا ہے؟

A. 120 मी
120 m
120میٹر

B. 150 मी
150 m
150میٹر

C. 90 मी
90 m
90میٹر

D. 135 मी
135 m
135میٹر

Answer: A. 120 मी
120 m
120میٹر

148 एक पुरुष म्हणतो “जर P हा माझ्या एकमेव भावाचा मुलगा माझ्या वडिलांचा नातू आहे, तर माझा भाऊ आणि P यांचे काय नाते आहे”?

A man said ,’If P i.e. son of my only brother is my father's grandson, then how is my brother related to P?

اگر" آدمی نے کہا P میرے بھائی کا ، تو میرے باپ کے پوتے کا واحد بیٹا ہے P سے کیا رشتہ ہے؟

A.भाऊ
A.Brother
A.بھائی

B.वडील
B.Father
B.باپ

C.आजोबा
C.Grandfather
C.نانا

D.सासरे
D.Father-in-law
D.سسر

Answer: B.वडील
B.Father
B.باپ

149 सत्य नाडेला हे _____याचे सीईओ आहेत

Satya Nadella is the CEO of –

ستیا نادیلا کسکے سی ای او ہیں ؟

A.ॲमेझोन
A.Amazon
A.آمیزان

B.स्पेसएक्स
B.SpaceX
B.اسپیس ایکس

C.मायक्रोसॉफ्ट
C.Microsoft
C.مائیکرو سافٹ

D.यांपैकी कोणतेही नाही
D.None of these
D.ان میں سے کوئی نہیں

Answer: C.मायक्रोसॉफ्ट
C.Microsoft
C.مائیکرو سافٹ

150 भारतीय तत्त्वज्ञान खंड I व II चे लेखक आहेत महान तत्त्वज्ञ

Author of the book Indian Philosophy Vol I & II is great philosopher

کتاب "انڈین فلاسفی جلد 1 اور 2 کےمصنف عظیم فلسفی ہیں

A.डॉ सर्वपल्ली राधाकृष्णन
A.Dr Sarvpillai Radhekrishnan
A.ڈاکٹر سروے پلی رادھا کرشنن

B.स्वामी विवेकानंद
B.Swami Vivekanand
B.سوامی وویکا نند

C.रवींद्रनाथ टैगोर
C.Rabindra Nath Tagore
C. رابندر ناتھ ٹیگور

D.अमर्त्य सेन
D.Amrtya Sen
D.امرتیہ سین

Answer: A.डॉ सर्वपल्ली राधाकृष्णन
A.Dr Sarvpillai Radhekrishnan
A.ڈاکٹر سروے پلی رادھا کرشنن

151 सूचना: दिलेल्या पर्यायांमधून श्रेणी पूर्ण करणारी योग्य आकृती निवडा.

DIRECTIONS: Complete the series by choosing right figure from the given choices.

ہدایات: دیئے گئے اختیارات میں صحیح شکل کا انتخاب کر کے سیریز کو مکمل کیجیئے۔

प्रश्न आकृत्या
Question Figures
سوالی شکل

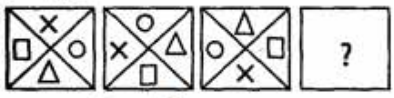

उत्तरासाठी पर्यायी आकृत्या
Answer Figures
جوابی شکل

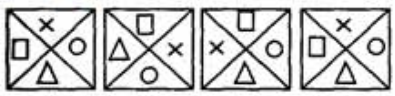

A. (A)

B. (B)

C. (C)

D. (D)

Answer: B. (B)

152 वर्तुळाला दोन भिन्न बिंदूंमध्ये जोडणाऱ्या रेषेला वर्तुळाची _____म्हणतात?

A line which intersects a circle in two distinct points is called a ……. of the circle?

ایک لائن جو دو مختلف متعین نکات پر ایک دائرے کو قطع کرے اس کو دائرے کا ..... کہا جاتا ہے؟

A.व्युज्या
A.Secant
A.سیکینٹ

B.कंस
B.Arc
B.آرک

C.वर्तुळखंड
C.Segment
C.سیگمنٹ

D.जीवा
D.Chord
D.کورڈ

Answer: A.व्युज्या
A.Secant
A.سیکینٹ

153 $\sqrt[2]{8464} = ?$

A. 92

B. 65

C. 64

D. 62

Answer: A. 92

154	20×13+40×30+5×2=? 20×13+40×30+5×2=? 20×13+40×30+5×2=?
	A.2000 A.2000 A.2000
	B.2500 B.2500 B.2500
	C.2890 C.2890 C.2890
	D.1470 D.1470 D.1470
Answer:	D.1470 D.1470 D.1470
155	मानवाचा विकासाचे भाग अशा प्रकारे करण्यात आले आहेत Human development divided into domains such as انسانی ترقی اس طرح کے اقلیموں میں منقسم ہے جیسے کہ
	A.शारीरिक, आकलनात्मक, भावनिक आणि सामाजिक A.physical, cognitive, emotional and social A.جسمانی، ادراکی، جذباتی اور سماجی
	B.मानसशास्त्रीय, आकलनात्मक, भावनिक आणि शरीरिक B.Psychological, cognitive emotional and physical B.نفسیاتی، ادراکی جذباتی اور جسمانی
	C.शारीरिक, आवेशपूर्ण आणि शरीरशास्त्रीय C.physical spirited and soul C.جسمانی زندہ دل اور روح
	D.भावनिक, सामाजिक आणि शरीरशास्त्रीय D.emotional social and physiological D.جذباتی سماجی اور عضویاتی

Answer: B.मानसशास्त्रीय, आकलनात्मक, भावनिक आणि शरीरिक
B.Psychological, cognitive emotional and physical
B.نفسیاتی، ادراکی جذباتی اور جسمانی

156 सूचना: दिलेल्या पर्यायांमधून वेगळे ते बाहेर काढा.

DIRECTIONS: Find the odd one out from the given alternatives.

سمت: دیے گئے متبادل میں سے بے جوڑ کو تلاش کرو۔

A.KMNL
A.KMNL
A.KMNL

B.PRSQ
B.PRSQ
B.PRSQ

C.VWVZ
C.VWVZ
C.VWVZ

D.JLMK
D.JLMK
D.JLMK

Answer: C.VWVZ
C.VWVZ
C.VWVZ

157 जर 216 लहान आणि एकसारखे घन ज्याची प्रत्येक बाजू 1 सेंटीमीटर आहे असे एक मोठा घन बनवण्याकरता एकत्र ठेवले असतील, तर मोठ्या घनाच्या प्रत्येक बाजूची लांबी किती आहे (सें.मी.मध्ये)?

If 216 small and identical cubes each of side 1 cm are placed together to form a bigger cube, what is the length of each side of the bigger cube (in cm)?

اگر 216 ایک جیسے چھوٹے کیوبس جن میں ہر ایک کی سائیڈ 1 سینٹی میٹر ہو، انھیں جوڑ کرد بڑا کیوب بنایا جائے تو بڑے کیوب کی ہر سائڈ کی لمبائی کتنی ہوگی؟ س-م میں

A.5
A.5
A.5

B.6
B.6
B.6

C.7
C.7
C.7

D.8
D.8
D.8

Answer: B.6
B.6
B.6

158 च्या बाबतीत शिकवणे हे बिलकुल शक्य नाही

The teaching is not possible at all in case of—

تعلیم اس صورت میں بالکل ممکن نہیں ہے-

A.विशिष्ट क्षेत्र किंवा विषयामध्ये समान नैपुण्य असलेल्या दोन व्यक्ती
A.Two individuals having similar expertise in a specific area or subject
A.ایک مخصوص میدان یا موضوع میں دو افراد کی یکساں مہارت

B.ते वर्गामध्ये घडत नाही आहे
B.It is not happening in a class room
B.کلاس روم میں ایسا نہیں ہونا چاہئے

C.ते निश्चित अभ्यासक्रमावर आधारित नाही
C.It is not based on definite curriculum
C.یہ متعین نصاب پر مبنی نہیں ہے

D.वरील सर्व
D.All the above
D.مذکورہ تمام

Answer: D.वरील सर्व
D.All the above
D.مذکورہ تمام

159	2y2 + 36y + 162 = 0 या वर्गसमीकरणाची मुळे आहेत: The roots of the quadratic equation 2y2 + 36y + 162 = 0 are: 2 مربع مساوات کے روٹy2 + 36y + 162 = 0 ہیں
	A.-9,-9 A.-9,-9 A.-9,-9
	B.9, 9 B.9, 9 B.9, 9
	C.9,-9 C.9,-9 C.9,-9
	D.-9, 9 D.-9, 9 D.-9, 9
Answer:	A.-9,-9 A.-9,-9 A.-9,-9
160	2^{502}चा विस्तार केल्यास एकक स्थानचा अंक काय असेल? What will be the unit digit in the expansion of 2^{502}? 2^{502} کے پھیلاو میں یونٹ ہندسہ کیا ہوگا؟
	A.2 A.2 A.2
	B.4 B.4 B.4
	C.8 C.8 C.8
	D.6 D.6 D.6

Answer: B.4
B.4
B.4

161 सूचना: दोन विधाने आणि त्यानंतर दोन निष्कर्ष, I आणि II दिले आहेत. ही विधाने सामान्यतः ज्ञात वस्तुस्थितीपेक्षा भिन्न असली तरी सत्य आहेत असे समजा. दिलेल्यापैकी कोणता निष्कर्ष दिलेल्या विधानांवरुन नक्की काढता येऊ शकतो हे तुम्ही ठरवायचे आहे.तुमचे उत्तर सूचित करा.

विधाने:
(a) काही कागद पेन आहेत.
(b) सर्व पेन्सिल पेन्स आहेत.
निष्कर्ष:
I. काही पेन्स पेन्सिल्स आहेत.
II. काही पेन्स पेपर्स आहेत.

DIRECTION: Two statements are given following by two conclusions, I, and II. You have to consider that statements to be true, even if they seem to be at variance from commonly known facts. You are to decide which of the given conclusions can definitely be drawn from the given statements. Indicate your answer.

Statements:
(a) Some papers are pens.
(b) All the pencils are pens.

Conclusion:
I. Some pens are pencils.
II. Some pens are papers.

ہدایات: دو سٹیٹمنٹ جوکہ دو خلاصوں پر مشتمل ہیں .I اور II. اگرچہ دکہنے میں وہ بہت سارے .اپ کو وہ سٹیٹمنٹ درست ماننا ہے، حقاٰق ست مطبقت رکہتی ہو۔ اپ کو دیے گے خلاصوں میں سے یقینی طور پر اسے اختیار کرنا ہے جو سٹیٹمنٹ سے نکلا ہو. اپنا جواب تلاش کرے.

اظہار بیان:
کچہ پیپر پن ہیں
تمام پنسلیں پن ہیں

نتائج:
I۔کچہ پن پنسل ہیں
II۔کچہ پن پیپر ہیں

A.केवळ II निष्कर्ष निष्कर्ष निघेल
A.Only II conclusion follows
A.صرف II درست ہے

B.एकतर I किंवा II निष्कर्ष निघेल
B.Either I or II follows
B.I یا II درست ہے

C.दोन्ही I आणि II निष्कर्ष निघेल
C.Both I and II follow
C.I اور II دونوں درست ہیں

D.केवळ I निष्कर्ष निष्कर्ष निघेल
D.Only I conclusion follows
D.صرف I درست ہے

Answer: C.दोन्ही I आणि II निष्कर्ष निघेल
C.Both I and II follow
C.I اور II دونوں درست ہیں

162 निर्देश: पुढील प्रश्नांपैकी प्रत्येक प्रश्नात एक संख्या गहाळ आहे. मालिकेचा नमुना समजून घ्या आणि योग्य संख्या निवडा.
45, 54, 47, ... , 49, 56, 51, 57, 53

DIRECTION: In each of the following questions, one number is missing in the series. You have to understand the pattern of the series and insert the number.

45, 54, 47, ... , 49, 56, 51, 57, 53

ہدایت جیل کے ہر سوال میں سرج کا ایک نمبر گمشدہ ہے . آپکو اس سرج کو سمجھنا ہے. اور گمشدہ نمبر کو یہا کھوجنا ہے

45, 54, 47, ... , 49, 56, 51, 57, 53

A.48
A.48
A.48

B.55
B.55
B.55

C.50
C.50
C.50

D.53
D.53
D.53

Answer: B.55
B.55
B.55

163

खालील प्रश्नामध्ये प्रश्न चिन्हाच्या (?) जागी काय यायला हवे?

What should come in place of the question mark (?) in the following question?

نیچے دئے ہوئے سوالات میں سوالیہ نشان (؟) کی جگہ کیا آئے گا۔

$2\frac{1}{3} \div 2\frac{1}{5} = ?$

(A) $\frac{35}{33}$

(B) $2\frac{2}{33}$

(C) $3\frac{2}{33}$

(D) $4\frac{2}{33}$

Answer: (A) $\frac{35}{33}$

164

निर्देश: खाली दिलेले प्रश्न वर्ण मालिकेवर आधारित आहेत. या प्रत्येक मालिकेत, काही अक्षरे गहाळ आहेत. योग्य पर्याय निवडा पाच पेक्षा अधिक अक्षरे गहाळ असल्यास, मालिकेतील शेवटचे पाच अक्षरे निवडा .

pqr - r - r - qp - - qrp

DIRECTION: Questions given below are based on the letter series. In each of these series, some letters are missing. Select the correct alternative. If more than five letters are missing, select the last five letters of the series:

pqr - r - r - qp - - qrp

ہدایت نیچے دے ہے سوالات حرف سرج پر مشتمل ہیں . ہر میں کہیں حرف گمشدہ ہے . سہی اختیارات کو چنے . اگر پچ حرف گنمام ہو تو آخری پانچ حرفونکو چنے

pqr - r - r - qp - - qrp

A.qppqr
A.qppqr
A.qppqr

B.qprqp
B.qprqp
B.qprqp

C.pqpqr
C.pqpqr
C.pqpqr

D.qrppq
D.qrppq
D.qrppq

Answer: A.qppqr
A.qppqr
A.qppqr

165 खालीलपैकी शुद्ध वाक्य कोणते ?

A.तू मले शहाणपणा शिकवू नोको.

B.तू मले शहाणपणा शिकवू नकोस.

C.तू मला शहाणपणा शिकवू नोको.

D.तू मला शहाणपण शिकवू नको.

Answer: D.तू मला शहाणपण शिकवू नको.

166 ‘ दीर्घ ’ या शब्दाचा विरुद्धार्थी शब्द कोणता ?

A.गुरू

B.लघु

C.ऱ्हस्व

D.जवळ

Answer: C.ऱ्हस्व

167 जेव्हा एक प्राणी दुसऱ्याचा निरोध करण्यासाठी वापरला जातो, त्याला म्हणतात. उदाहरणार्थ सापांना क्षेत्रामध्ये प्रोत्साहित केले जाते, तेव्हा उंदरांची संख्या नियंत्रणात येते. यासाठी कोणता शब्द आहे?

When one animal is used to suppress another, it is called this. For example, if snakes are encouraged in an area, the rodent population will be controlled. What is the term used?

جب ایک جانور دوسرےجانور کو ختم کرنے کے لئے استعمال کیا جاتا ہے، تو اس عمل کو کیا کہا جاتا ہے..... مثال کے طور پر، ایک علاقے میں سانپ کی حوصلہ افزائی کر کے، چوہے کی آبادی کو کنٹرول کیا جاتا ہے اسکے لئے کس اصطلاح کا استعمال کیا جاتا ہے؟

A.कीटकांचे तांत्रिक नियंत्रण
A.Technical control of pests
A. کیڑوں کو تکنیکی طور پر کنٹرول

B.कीटक नियंत्रण
B.Pest control
B. کیڑوں پر قابو

C.कीटकांचे बोटॅनिकल नियंत्रण
C.Botanical control of pests
C. کیڑوں پر باٹنک کنٹرول

D.कीटकांचे जैविक नियंत्रण
D.Biological control of pests
D. کیڑوں پر حیاتیاتی کنٹرول

Answer: D.कीटकांचे जैविक नियंत्रण
D.Biological control of pests
D. کیڑوں پر حیاتیاتی کنٹرول

168 खालीलपैकी कोणते सिंचित क्षेत्रामध्ये अध:पतनाचे मुख्य स्वरूप आहे?

Which one among the following is the main form of degradation in irrigated areas?

مندرجہ ذیل میں سے کس کو سیراب علاقوں کو براساں کرنا مانا جائیگا ؟

A.घळ अपक्षरण
A.Gully erosion
A. گلی کشیدگی

B.वारा अपक्षरण
B.Wind erosion
B. ہوا کی کشیدگی

C.मातीचे क्षारीकरण
C.Salinization of soils
C. زمین کی سیلینائزیشن

D.जमीनीवर गाळ साचणे
D.Siltation of land
D. زمین کی سلٹیشن

Answer: D.जमीनीवर गाळ साचणे
D.Siltation of land
D. زمین کی سلٹیشن

169 दिलेली अदलाबदल : चिन्हे – आणि +, तसेच आकडे 2 आणि 4; तर 2 + 4 – 8 चे मूल्य किती ?

Given interchanges: signs – and +, and numbers 2 and 4; then the value of 2 + 4 – 8 is

دیئے گئے تبادلے: علامات - اور +، اور نمبر 2 اور 4؛ تو 2 + 4 – 8 کی تعداد ہے

A.4
A.4
A.4

B.6
B.6
B.6

C.10
C.10
C.10

D.2
D.2
D.2

Answer: C.10
C.10
C.10

170 3^4 = ?

3^4 = ?

3^4 = ?

A.12
A.12
A.12

	B.15 B.15 B.15
	C.81 C.81 C.81
	D.25 D.25 D.25
Answer:	C.81 C.81 C.81

171 सूचना: प्रत्येक प्रश्नाला एक प्रमुख विधानासोबत चार विधाने आहेत ज्यांच्याखाली A, B, C, आणि D असे चार विधान आहेत. क्रमवार विधानांची जोडी निवडा ज्यामध्ये प्रथम विधान दुसऱ्या विधानाला सुचवते, आणि दोन्ही विधाने तर्किकदृष्ट्या प्रमुख विधानासोबत निगडित असेल.

ती एकतर एक गृहिणी आहे किंवा
कार्यरत महिला आहे
A. ती एक गृहिणी आहे.
B. ती गृहिणी नाही.
C. ती एक कार्यरत महिला आहे.
D. ती एक कार्यरत महिला नाही.

DIRECTIONS: Each question has a main statement followed by four statements labelled A, B, C and D. Choose the ordered pair of statements, where the first statement implies the second, and the two statements are logically consistent with the main statement.

She is either a housewife or a working woman.
A.She is a housewife
B.She is not a housewife
C.She is a working woman
D.She is not a working woman

ہدایت: ہر سوال میں ایک جملہ ہے جسکے بعد چار جملےاے، بی،سی اور ڈی کے نام سے دئے گئے ہیں اسمیں منسلک جوڑیوں کو چنئے۔ جہاں پہلا جملہ دوسرے جملہ کی اور اشارہ کر رہا ہے اور دو جملے منطقی مرکزی بیان کے مطابق ہیں

وہ یا تو ایک ہاؤس وائف ہے یا ورکنگ ویمن
A۔ وہ ہاؤس وائف ہے
B۔ وہ ہاؤس وائف نہیں ہے
C۔ وہ ورکنگ ویمن ہے
D۔ وہ ورکنگ ویمن نہیں ہے

A.AC
A.AC
A.AC

B.DA
B.DA
B.DA

C.CB
C.CB
C.CB

D.AB
D.AB
D.AB

Answer: B.DA
B.DA
B.DA

172 एक व्यक्ती एक वस्तू 25% नफ्याने विक्री करते. जर त्याने ती वस्तू 20% कमी ला आणली असेल आणि ती रु. 10.50 कमी किमतीने विकली असेल, तर त्याला 30% नफा झाला असता. वस्तूची खरेदी किंमत (रुपयांमध्ये) काढा?

A man sells an article at a profit of 25%. If he had bought it for 20% less and sold it for Rs.10.50 less, he would have gained 30%. Find the cost price (in Rs.) of the article?

ایک آدمی 25%منافع میں ایک چیز فروخت کی ہے. اگر اس نے اسے 20%کم پر خریدا تھا اور اسے 10.50 روپے کے لئے فروخت کیا تھا، تو اسے 30%تک نفع ہوگا. چیز کی لاگت قیمت (روپے میں) تلاش کریں؟

A.40
A.40
A.40

B.60
B.60
B.60

C.50
C.50
C.50

D.यांपैकी कोणतेही नाही
D.None of these
D. کوئی نہیں

Answer: C.50
C.50
C.50

173 आपल्याला आपल्या वातावरणामध्ये ऑक्सिजन कोठून मिळते?

From where do we get oxygen in our atmosphere?

ہم اپنے ماحول میں آکسیجن کہاں سے حاصل کرتے ہیں

A.प्राणी
A.Animals
A. جانور

B.मानव
B.Human Beings
B. انسان

C.वनस्पती आणि झाडं
C.Plants and trees
C. پودوں اور درختوں

D.वाहने
D.Vehicles
D. گاڑیاں

Answer: C.वनस्पती आणि झाडं
C.Plants and trees
C. پودوں اور درختوں

174 हे करीत असल्यास एक शिक्षक यशस्वी होऊ शकतो

A teacher can be successful if he/she

ایک معلم کامیاب ہوسکتا ہے اگر وہ

A.तो विद्यार्थ्यांना अधिक चांगले नागरिक होण्यास मदत करतो
A.Helps students in becoming better citizens
A.بہتر شہری ہونے میں مدد کرتے ہیں

B.विद्यार्थ्यांना विषयाचे ज्ञान देतो
B.Imparts subject knowledge to students
B.مضمون کے علم سے طلباء کو بہرہ مند کرتے ہیں

C.विद्यार्थ्यांना परीक्षा उत्तीर्ण करण्यास तयार करतो
C.Prepares students to pass examination
C.طلباء کو امتحان پاس کرنے کے لئے تیار کرتے ہیں

D.विषय सुसंघटीत पद्धतीने सादर करतो
D.Presents the subject matter in a well-organized manner
D.مضمون کے مواد کو اچھی طرح منظم انداز میں پیش کرتے ہیں

Answer: C.विद्यार्थ्यांना परीक्षा उत्तीर्ण करण्यास तयार करतो
C.Prepares students to pass examination
C.طلباء کو امتحان پاس کرنے کے لئے تیار کرتے ہیں

175 हरीकडे बोट दाखवून, सीमा म्हणते, “हे माझा सर्वात मोठा मुलगा महेशचे आजोबा आहेत” मग हरीचे सीमासोबत काय नाते आहे?

Pointing to Hari, Seema says. "He is the grandfather of Mahesh, i.e.my eldest son. How is Hari related to Seema?

ہری کی طرف اشارہ کرکے سی ما نے کہا ، " یے میرے بڑے بیٹے مہیش کا دادا ہے. ہری کا سی ما سے کیا رشتہ ہے؟

A.मुलगा
A.Son
A.بیٹا

B.काका
B.Uncle
B.چچا

C.मेव्हणा
C.Brother-in-law
C.جی جا

D.यापैकी एकही नाही
D.None of these
D.ان میں سے کوئی نہیں

Answer: D.यापैकी एकही नाही
D.None of these
D.ان میں سے کوئی نہیں

176 सूचना: खालील प्रश्नांमध्ये दिलेल्या पर्यायांमधून संबंधित अक्षर समूह निवडा.

BDHP : CFKT: : PHDB: ?

DIRECTIONS: In the following question, select the related group of letters from the given alternatives.

BDHP : CFKT: : PHDB: ?

سمت: مندرجہ ذیل سوال میں، دیے گئے متبادل میں سے حروف کا متعلقہ گروپ منتخب کریں۔

BDHP : CFKT: : PHDB: ?

A.HSWH
A.HSWH
A.HSWH

B.QJGF
B.QJGF
B.QJGF

C.BSWN
C.BSWN
C.BSWN

D.HWSH
D.HWSH
D.HWSH

Answer: B.QJGF
B.QJGF
B.QJGF

177 80, 84 आणि 92 चा लसावी काढा?

Find the LCM of 80, 84 & 92?

80، 84 کے ایل سی ایم (LCM)اور 92 کو تلاش کریں؟

A.37640
A.37640
A.37640

B.38640
B.38640
B.38640

C.39640
C.39640
C.39640

D.यांपैकी कोणतेही नाही
D.None of these
D.کوئی نہیں

Answer: B.38640
B.38640
B.38640

178 खालीलपैकी कोणते परिवर्तनशील शिक्षणाच्या कार्याचे प्रतिनिधित्व करते?

Which one of the following is representing the function of teaching variable?

مندرجہ ذیل میں سے کونسا ایک متغیر تدریس کے کام کی نمائندگی کرتا ہے؟

A.नैदानिक
A.Diagnostic
A.تشخیصی

B.उपचारात्मक
B.Remedial
B.معتبر

C.मूल्यांकन
C.Evaluation
C.تشخیص

D.वरील सर्व
D.All the above
D.مذکورہ تمام

Answer: D.वरील सर्व
D.All the above
D.مذکورہ تمام

179 निर्देश: खालील शब्दांची तार्किक क्रमाने मांडणी करा:

(i) जिल्हाधिकारी
(ii) राज्यपाल
(iii) मुख्य सचिव
(iv) अध्यक्ष
(v) लिपिक

DIRECTIONS: Arrange the following in a logical order:

(i) Collector
(ii) Governor
(iii) Chief Secretary
(iv) President
(v) Clerk

ہدایات: ایک منطقی ترتیب میں مندرجہ ذیل کو مرتب کریں:

(i) کلکٹر
(ii) گورنر
(iii) چیف سیکریٹری
(iv) صدر
(v) کلرک

A.(i), (ii), (iii), (iv), (v)
A.(i), (ii), (iii), (iv), (v)
A.(i), (ii), (iii), (iv), (v)

B.(v), (i), (iii), (ii), (iv)
B.(v), (i), (iii), (ii), (iv)
B.(v), (i), (iii), (ii), (iv)

C.(v), (i), (iii), (iv), (ii)
C.(v), (i), (iii), (iv), (ii)
C.(v), (i), (iii), (iv), (ii)

D.(v), (i), (iv), (iii), (ii)
D.(v), (i), (iv), (iii), (ii)
D.(v), (i), (iv), (iii), (ii)

Answer: B.(v), (i), (iii), (ii), (iv)
B.(v), (i), (iii), (ii), (iv)
B.(v), (i), (iii), (ii), (iv)

180 भौतिक भुगोलाच्या नकाश्यामध्ये नद्या याने दर्शवतात

In the map of physical geography, the rivers are shown with

فزیکل جغرافیہ کے نقشہ میں، دریاؤں کو دکھایا گیا ہے

A.राखाडी रंग
A.Gray color
A. سرمئی رنگ

B.हिरवा रंग
B.Green color
B. سبز رنگ

C.निळारंग
C.Blue color
C. نیلا رنگ

D.पांढरा रंग
D.White color
D. سفید رنگ

Answer: C.निळारंग
C.Blue color
C. نیلا رنگ

181 निर्देश: खाली दिलेल्या प्रतीक-अक्षर-संख्यांच्या क्रमाचा संदर्भ घेणार्या या प्रश्नांची उत्तरे द्या:

2 P J @ 8 $ L B 1 V # Q 6 & G W 9 K C D 3 ≥ * E 5 F R 7 A Y 4

दिलेल्या पर्यायांपैकी कोणते संख्या \अक्षर वर दिलेल्या व्यवस्थेच्या उजवी कडून 12 व्या संख्या \अक्षर च्या डाव्या बाजूने 10 वे आहे

DIRECTION: Answer these questions referring to the symbol-letter-number sequence given below:

2 P J @ 8 $ L B 1 V # Q 6 & G W 9 K C D 3 ≥ * E 5 F R 7 A Y 4

Which of the following is the tenth to the left of the twelfth from the left end of the above arrangement?

ہدایت جیل کے سوال دے ہے نشانو اور نمبرس اور لفجونپر مشتمل ہیں

2 P J @ 8 $ L B 1 V # Q 6 & G W 9 K C D 3 ≥ * E 5 F R 7 A Y 4

الٹے ہاتھ سے بارہوے حرف کے الٹے ہاتھ سے دسوا حرف کونسا ہے ؟

A.B
A.B
A.B

B.9
B.9
B.9

C.2
C.2
C.2

D.P
D.P
D.P

Answer: D.P
D.P
D.P

182 विधान:
सरकारच्या संरक्षणासाठी थेट टीव्हीवरील काही तथ्यांविषयी राज्यमंत्र्यांनी खोटे बोलले आहे.

कृतीचा कोर्स:
I. तिच्यावर कायदेशीर कारवाई केली पाहिजे.
II. मंत्र्यांना खोटे बोलण्याचा विशेषाधिकार आहे.

Statement:
A minister of the state lied about some facts on live TV for protecting government.
Course of actions:
I. Legal actions should be taken against her.
II. Ministers have privilege to lie.

بیان:
ایک اسٹیٹ منسٹر نے حکومت کے دفاع کے لیے لائیو ٹی وی پر کچھ حقائق کے بارے میں جھوٹ بولا

لائحہ عمل:
I۔ اس کے خلاف قانونی کاروائی ہونی چاہیے ۔
II۔ منسٹرز کو جھوٹ بولنے کا حق حاصل ہے ۔

A.फक्त I अनुसरून आहे
A.Only I follows
A. صرف I لاگو ہو گا۔

B.फक्त II अनुसरण करते आहे
B.Only II follows
B. صرف II لاگو ہو گا۔

C.एकतर I किंवा II अनुसरून आहे
C.Either I or II follows
C. I یا II میں سے ایک لاگو ہو گا۔

D.I किंवा II दोन्हीपैकी काहीही अनुसरण करत नाही
D.Neither I nor II follows
D. I اور II میں سے کوئی بھی لاگو نہیں ہو گا۔

Answer: A.फक्त I अनुसरून आहे
A.Only I follows
A. صرف I لاگو ہو گا۔

183 DIRECTIONS: A sentence with an underlined word is given below. Find the word which is opposite in meaning to the underlined word from the given options.
The goalkeeper was sent off for using abusive language.

A.Complimentary

B.Insulting

C.Vulgar

D.Offensive

Answer: A.Complimentary

184 तोंडी, लेखी आणि कार्यक्षमता चाचणीचा एक समूह म्हणजे:

One group of verbal, non–verbal & performance test is

زبانی، غیر زبانی اور کارکردگی کا ٹیسٹ کا ایک گروپ ہے

A.डब्ल्यूएआइएस
A.WAIS
A.WAIS

B.जीएमएटी
B.GMAT
B.GMAT

C.एसपीएम
C.SPM
C.SPM

D.आरएसपीएम
D.RSPM
D.RSPM

Answer: A.डब्ल्यूएआइएस
A.WAIS
A.WAIS

185 एका विशिष्ट सांकेतिक भाषेमध्ये, जर DECORATE हा शब्द EDOCARET असा कूटबध्द केला जात असेल, HYGROMETER हा शब्द त्या भाषेत कसा कूटबध्द केला जाईल?

In a certain code language, if the word DECORATE is coded as EDOCARET, then how is the word HYGROMETER coded in that language?

ایک مخصوص ضابطے کی زبان میں، اگر لفظ DECORATE کو EDOCARET لکھاجاتاہے، تو اس زبان میں لفظ HYGROMETER کو کیسے لکھاجائیگا؟

A.YHRMGOTERE
A.YHRMGOTERE
A.YHRMGOTERE

B.YHRGMTOERE
B.YHRGMTOERE
B.YHRGMTOERE

C.YHRGMOTERE
C.YHRGMOTERE
C.YHRGMOTERE

D.YHRGMOTREE
D.YHRGMOTREE
D.YHRGMOTREE

Answer: C.YHRGMOTERE
C.YHRGMOTERE
C.YHRGMOTERE

186 सूचना: अर्थपूर्ण परिच्छेद निर्माण करण्यासाठी, खाली दिलेली (P), (Q) (R), (S) आणि (T) ही पाच वाक्ये योग्य अनुक्रमाने पुनर्रचना करा; त्यांनतर खालील प्रश्नांची उत्तर द्या.
P. भगवान श्रीकृष्णाने सापाला वृंदावन सोडून जाण्यास सांगितले आणि पुन्हा येऊ नको असे बजावले.
Q. भगवान श्रीकृष्णाने सापासोबत लढण्याचे ठरविले ठरविले.
R. एकदा एक प्रचन्ड मोठा काळा साप येऊन यमुना नदीमध्ये राहू लागला.
S. लवकरच साप पराभूत झाला.
T. त्याच्या उपस्थितीने नदीचे पाणी विषारी बनले.

पुनर्रचना केल्यानंतर खालीलपैकी कोणते वाक्य तिसरे असेल?

DIRECTION: Rearrange the following five sentences (P), (Q), (R), (S) and (T) in the proper sequence to form a meaningful paragraph; then answer the questions given below them.
P. Lord Krishna asked the snake to leave Vrindavan and never come back.
Q. Lord Krishna decided to fight the snake.
R. Once a huge black serpent came to Vrindavan and started living in the river Yamuna.
S. Soon the snake was defeated.
T. Because of his presence, the water of the river turned poisonous.

Which of the following should be the THIRD sentence after rearrangement?

ہدایات: ان پانچ جملوں (P)، (Q)، (R)، (S) اور (T) کو با معنی پیرا بنانے کے لئے دوبارہ ترتیب دیجئے، پھر نیچے دے گئے سوالوں کے جواب دیجئے

P. دیوتا کرشنا نے سانپ سے کہا کہ وو وریندھوں چھوڈ دے اور کبھی واپس نہ اے.
Q. دیوتا کرشنا نے فیصلہ کیا کہ وو سانپ سے لڑے گا.
E. ایک بار ایک بڑا سانپ وریندھوں میں آیا اور دریائی یمنہ میں رہنے لگا.
S. جلدی سانپ کو ہرایا گیا.
T. کیوں کہ اسکی موجود گی سے، پانی ظہر میں تبدیل ہو رہا تھا.

دوبارہ ترییب دینے کے بعد کون سا جملہ تیسرا ہونا چاہیے؟

A.Q
A.Q
A.Q

B.P
B.P
B.P

C.S
C.S
C.S

D.T
D.T
D.T

Answer: A.Q
A.Q
A.Q

187 किटाणू आणि बुरशी परिस्थितीक व्यवस्थेमध्ये _____म्हणून काय करतात.

Bacteria and fungi act as _____ within an ecosystem.

بیکٹیریا اور فنگی ایک ماحولیاتی نظام کے اندر اندر بطور ---------- کام کرتے ہیں.

A.प्राथमिक उत्पादक
A.Primary producers
A. پرائمری پروڈیوسروں

B.प्राथमिक उपभोक्ते
B.Primary consumers
B. پرائمری صارفین

C.दुय्यम
C.Secondary consumers
C. سیکنڈری صارفین

D.विघटनकारी
D.Decomposers
D.توڑنے والے

Answer: D.विघटनकारी
D.Decomposers
D.توڑنے والے

188 ‘ रस्ता ‘ या शब्दाचा समानार्थी शब्द कोणता ?

A.चौक

B.वाट

C.आडवाट

D.वळण

Answer: B.वाट

189 सूचना : खालील दिलेल्या प्रश्नामध्ये काही विधाने आणि काही निष्कर्ष आहेत. सामन्यात: ज्ञात तथ्यांपेक्षा ते वेगळे असतील तर दिलेली विधाने तुम्हाला सत्य मानवी लागतील आणि त्यानंतर दिलेल्या विधानाचे अनुकरण दिलेल्यापैकी कोणता निष्कर्ष तार्किकदृष्ट्या करतो ते ठरवा.

विधाने :
Y = P, P ≤ F, F ≥ L, L = K
निष्कर्ष :
I. F = K
II. F > K

DIRECTIONS: In the question given below, there are few statements followed by few conclusions. You have to take the given statements to be true even if they seem to be at variance with commonly known facts and then decide which of the given conclusion logically follow(s) from the given statements.

Statements:
Y = P, P ≤ F, F ≥ L, L = K
Conclusions:
I. F = K
II. F > K

ہدایات: مندرجہ ذیل سوال میں، کچھ بیانات کے بعد کچھ نتائج موجود ہیں. اگر آپ کو عام طور پر جانے جاتے حقائق کے ساتھ بھی متغیر ہونے لگے تو بھی آپ دئے گئے بیانات دماغ میں رکھیں اور پھر اس بات کا فیصلہ کریں کہ ذیل میں دیا گیا کونسا نتیجہ منطقانہ طور پر دیے گئے بیانات کی پیروی کرتا ہے.

بیانات:
Y=P, P ≤ F, F ≥ L, L=K
نتائج:
F = K .I
F > K .II

A.तर फक्त I निष्कर्ष अनुकरण करतो
A.If only Conclusion I follows
A.اگر صرف نتیجہI پیروی کرتا ہے

B.तर फक्त II निष्कर्ष अनुकरण करतो
B.If only Conclusion II follows
B.اگر صرف نتیجہII پیروی کرتا ہے

C.तर I किंवा II यापैकी एक निष्कर्ष अनुकरण
C.If either Conclusion I or II follows
C.اگر I اور II نتائج میں سے ایک پیروی کرے

D.तर I व II हे दोन्हीही निष्कर्ष अनुकरण करीत नाहीत
D.If neither Conclusion I nor II follows
D.اگرI اور II نتائج میں سے کوئی بھی پیروی نہ کرے

Answer:	C.तर I किंवा II यापैकी एक निष्कर्ष अनुकरण C.If either Conclusion I or II follows C.اگر I اور IIنتائج میں سے ایک پیروی کرے

190	गुणाकार करा: 224 × 22 = ? Multiply: 224 × 22 = ? ضرب دیں: 224 × 22= ?
	A.4432 A.4432 A.4432
	B.4876 B.4876 B.4876
	C.4928 C.4928 C.4928
	D.4598 D.4598 D.4598
Answer:	C.4928 C.4928 C.4928

191 निर्देश: दिलेल्या अंक मालिकेतील चुकीची संज्ञा शोधा:

1, 4, 27, 258, 3125, 46656, 823543

DIRECTIONS: Find the wrong term in the given number series.

1, 4, 27, 258, 3125, 46656, 823543

ہدایت دے گئے نمبرس سرج مے غلط نمبر کھوجے

1, 4, 27, 258, 3125, 46656, 823543

A.27
A.27
A.27

B.258
B.258
B.258

C.3125
C.3125
C.3125

D.4
D.4
D.4

Answer: B.258
B.258
B.258

192 भारताचा दक्षिणेकडील मुख्य भूभाग –

The southernmost point of mainland India is –

ہندوستان کی خشکی کا جنُوب بعید ترین نقطہ _____ ہے

A.कन्याकुमारी
A.Kanyakumari
A.کنیا کماری

B.इंदिरा पॉईंट
B.Indira Point
B.اندر پوائنٹ

C.कोची
C.Kochi
C.کوچی

D.यांपैकी कोणतेही नाही
D.None of these
D.ان میں سے کوئی نہیں

Answer: A.कन्याकुमारी
A.Kanyakumari
A.کنیا کماری

193 _____ ही बाह्य ताणतणावांसाठी प्रतिक्रिया आहे

_____ is the reaction to external stressors

_____ بیرونی دباؤ ڈالنے والے کا رد عمل ہے۔

A.अतिभार
A.Strain
A.تناؤ

B.ताण
B.Stress
B.دباؤ

C.तणाव
C.Tension
C. ٹینشن

D.यापैकी एकही नाही
D.None of these
D. ان میں سے کوئی نہیں

Answer: A.अतिभार
A.Strain
A.تناؤ

194 जर भाजीला रोप म्हटले, रोपाला मार्ग म्हटले, मार्गाला रस्ता म्हटले, रस्त्याला बाल्कनी म्हटले, बाल्कनीला जमीन म्हटले आणि जमिनीला छत म्हटले. तर एखादी मुलगी स्कूटर कोठे चालवू शकेल?

If vegetables is called plants, plants is called street, street is called road, road is called balcony, balcony is called floor and floor is called roof. Where a girl driving a scooter?

اگر سبزی کو پودے، پودوں کو گلی، گلی کو سڑک، سڑک کو بالکنی، بالکنی کو فرش اور فرش کو چھت کہا جائے، تو ایک لڑکی سکوٹر کہاں چلائے گی؟

A.बाल्कनी
A.Balcony
A.بالکنی

B.रस्ता
B.Road
B.گلی

C.जमीन
C.Floor
C.فرش

D.छत
D.Roof
D.چھت

Answer: A.बाल्कनी
A.Balcony
A.بالکنی

For More Info And Videos About TAIT-Exam Syllabus And Other Exam Visit My Channel
BADSHAHimp SubScribe Like & Share YouTube WWW.YouTube.com/BADSHAHimp

195 सूचना: प्रत्येक प्रश्नात दोन विधाने आहेत ज्यांच्या नंतर दोन निष्कर्ष आहेत ज्यांना I आणि II असे अंकित केले आहे. सर्वसामान्यपणे ज्ञात असलेल्या तथ्यांशी विसंगती असली तरीही, हे सत्य असल्याचे तात्पुरते मानून, सामान्यतः ज्ञात असलेल्या तथ्यांकडे दुर्लक्ष करून, दिलेल्या निष्कर्षांपैकी कोणती तर्कशुद्धपणे विधानांचे अनुसरण करतात ते ठरवा.
विधाने :
सर्व समुद्र मधमाश्या असतात.
काही चहा मधमाश्या असतात.
निष्कर्ष:
I. काही चहा समुद्र असतात.
II. काही समुद्र चहा असतात.

DIRECTION: Each of these questions consist of two statements followed by two conclusions marked I and II. Consider the statements to be true, even though they seem to be at variance with the commonly known facts and find out which of the given conclusion (s) logically follow (s) the statements, disregarding the commonly known facts.

Statements:
All seas are bees.
Some teas are bees.

Conclusions:
I. All teas are seas.
II. Some seas are teas.

ہدایت: ان میں سے ہر ایک سوال دو بیانات پر مشتمل ہے جس کے بعد دو نتائج دیے گئے ہیں جنھیں I اور II سے نشان زد کیا گیا ہے۔ بیانات کے درست ہونے پر غور کریں، اگرچہ وہ عام طور پر معلوم حقائق کے برعکس نظر آتے ہوں اور تلاش کریں کہ کون سے دیے گئے نتائج منطقی طور پر بیانات کی پیروی کرتے ہیں، عام طور پر معلوم حقائق سے قطع نظر۔

بیانات:
تمام سمندر شہد کی مکھیاں ہیں۔
کچھ چائے شہد کی مکھیاں ہیں۔

حل:
I. تمام چائے سمندر ہیں۔
II. کچھ سمندر چائے ہیں۔

A.जर केवळ निष्कर्ष I निघत असल्यास.
A.If only I follows
A.صرف I پیروی کرتا ہے۔

B.जर केवळ निष्कर्ष II निघत असल्यास.
B.If only II follows
B.صرف II پیروی کرتا ہے۔

C.जर दोन्ही निष्कर्ष I आणि II निघत नसल्यास.
C.If neither I nor II follows
C.نہ تو I نہ ہی II پیروی کرتا ہے

For More Info And Videos About TAIT-Exam Syllabus And Other Exam Visit My Channel
BADSHAHimp SubScribe Like & Share YouTube WWW.YouTube.com/BADSHAHimp

D.जर दोन्ही निष्कर्ष I आणि II निघत असल्यास.
D.If both I and II follow
D.I اور II دونوں پیروی کرتے ہیں

Answer: C.जर दोन्ही निष्कर्ष I आणि II निघत नसल्यास.
C.If neither I nor II follows
C.نہ تو I نہ ہی II پیروی کرتا ہے

196 डरमॅटोफेजिया म्हणजे

Dermatophagia is

ڈیرمٹافیگیا ہے

A.पाण्याची प्रचंड भीती
A.extreme fear of water
A.پانی کا بہت زیادہ خوف

B.खूप नखे कुरतडणे
B.extreme nail biting
B.بہت زیادہ ناخن کاٹنا

C.केस खाणे
C.eating hair
C. بال کھانا

D.खूप भूक
D.excessive hunger
D.زیادہ بھوگ لگنا

Answer: B.खूप नखे कुरतडणे
B.extreme nail biting
B.بہت زیادہ ناخن کاٹنا

197 Out of the given options, choose the most appropriate one to fill in the blank.
The sudden noise _____the horse.

A.frightened

B.have frighten

C.have frightened

D.has frighten

Answer:	A.frightened

198	Choose the word which is opposite in meaning to the given word. AMBIGUOUS
	A.Clear
	B.Indefinite
	C.Unclear
	D.Uncertain
Answer:	A.Clear

199	खालील पैकी कोणता आकार ल्युडो फाशाच्या आकाराशी साम्य दर्शवितो? Which of the following shapes is similar to the shape of ludo dice? دی گئ شکلوں میں کونسی پانسہ کی شکل سے ملتی جلتی ہے؟
	A. गोळा A. Sphere A. دائرہ
	B. दंडगोल B. Cylinder B. سلنڈر
	C. घनाकार C. Cube C. کیوب

For More Info And Videos About TAIT-Exam Syllabus And Other Exam Visit My Channel
BADSHAHimp SubScribe Like & Share YouTube WWW.YouTube.com/BADSHAHimp

D. आयतज/घनकल्प (क्युबॉईड)

D. Cuboid

D. کیوبائڈ

Answer: C. घनाकार

C. Cube

C. کیوب

200 नैराश्य सामान्यतः यांच्यात आढळते

Depression is commonly seen in

ڈپریشن عام طور پر دیکھا جاتا ہے اس میں

A.मध्यमवयीन स्त्रिया
A.Middle aged females
A.متوسط عمر کی عورتوں

B.मध्यमवयीन पुरुष
B.Middle aged men
B.متوسط عمر کے مردوں

C.तरुण व्यक्ती
C.Young individuals
C.نوجوان اشخاص

D.60 पेक्षा अधिक वयाच्या महिला
D.Females above 60
D.60 سال سے زائد کی عورتوں

Answer: A.मध्यमवयीन स्त्रिया
A.Middle aged females
A.متوسط عمر کی عورتوں

For More Info And Videos About TAIT-Exam Syllabus And Other Exam Visit My Channel
BADSHAHimp SubScribe Like & Share YouTube WWW.YouTube.com/BADSHAHimp

Question Paper Title : TAIT_PAPER_12

Date of Exam : 2017-12-17 09:00:00.0

1	$\sqrt[3]{512} = ?$
	A. 5
	B. 8
	C. 6
	D. 9
Answer:	B. 8

2	Out of the given options, choose the most appropriate one to fill in the blank. A policeman _____the thief.
	A.caught
	B.have caught
	C.have catch
	D.has catch
Answer:	A.caught

3	जर ,573 = 684 आणि ,861 = 972 तर? = 478 If 684 = 573, and 972 = 861, then 478 = ? 478 =?تو ،972 = 861 اور ،684 = 573 اگر
	A. 804
	B. 480
	C. 367

For More Info And Videos About TAIT-Exam Syllabus And Other Exam Visit My Channel
TAIT च्या 30 प्रश्नपत्रिका PDF
BADSHAHimp Available Request 9765226781
WWW.YouTube.com/BADSHAHimp
Subscribe My Channel

D. 840

Answer: C. 367

4 **सूचना**: दिलेल्या चारांपैकी वेगळी (असंबद्ध) असणारी आकृती शोधून काढा.

DIRECTIONS: Find the odd figure from the given four figures

ہدایات: دیئے گئے چار شکلوں میں طاق کونسی ہے۔

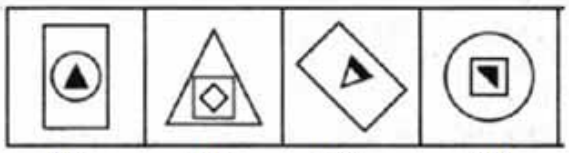

A. (A)

B. (B)

C. (C)

D. (D)

Answer: C. (C)

For More Info And Videos About TAIT-Exam Syllabus And Other Exam Visit My Channel
TAIT च्या 30 प्रश्नपत्रिका PDF Available Request 9765226781
BADSHAHimp
WWW.YouTube.com/BADSHAHimp
Subscribe My Channel

5 सूचना: हे प्रश्न खालील माहितीवर आधारित आहेत.
पाच मुले - A, B, C, D आणि E हे रांग - I मध्ये उत्तर दिशेकडे तोंड करून बसलेली आहेत, आणि पाच मुली - P, Q, R, S आणि T - रांग - II मध्ये दक्षिण दिशेकडे तोंड करून बसलेल्या आहेत, ते त्याच क्रमाने असतील असे नाही. रांग - I मधील प्रत्येक मुलगा रांग - II च्या बरोबर एका मुली सामोर आहे. त्यांच्याबद्दल खालील माहिती दिलेली आहे.
A आणि त्या मुलाच्या दरम्यान फक्त दोन लोक बसतात जो Q च्या सामोर आहे, आही जो कोणत्याही शेवटाला बसलेला नाही. C हा B च्या तत्काळ डाव्या बाजूला आहे, परंतु ते दोघे E च्या समीप नाहीत. P त्या मुलाच्या समोर आहे जो D च्या तत्काळ उजवीकडे आहे. D हा Q च्या समोर बसलेला नाही. R त्या मुलीच्या डाव्या बाजूस आहे जी D च्या सामोर आहे. C हा D च्या सामोर नाही.
D चा शेजारी कोण आहेत?

DIRECTIONS: These questions are based on the following information.
Five boys – A, B, C, D and E – are sitting in row-I, facing North, and five girls – P, Q, R, S and T – are sitting in row-II facing South, not necessarily in the same order. Each boy in row - I is facing exactly one girl from row -II. The following information is known about them.
Only two persons sit between A and the boy who faces Q, who does not sit at any end. C is to the immediate left of B, but both of them are not adjacent to E. P is opposite the boy who is to the immediate right of D. D does not sit opposite Q. R is to the left of the girl who faces D. C does not face S.
Who are the neighbours of D?

ہدایات: یہ سوالات مندرجہ ذیل معلومات پر مبنی ہیں۔
A اور Q کے درمیان صرف دو لوگ بیٹھے ہیں، جو کسی بھی سرے پر نہیں بیٹھا ہے۔ C، B کا سامنا کرنے والے لڑکے کے فوری بائیں طرف ہے، لیکن وہ دونوں E کے بالمقابل ہے جو P کے بغل میں نہیں ہیں۔ D اس لڑکے کے فوری دائیں طرف ہے۔ D، Q کے سامنے نہیں ہے۔ C، S کا سامنا کرنے والی لڑکی کے بائیں طرف بیٹھی ہے۔ R، D مقابل نہیں بیٹھا ہے۔
D کے پڑوسی کون ہیں؟

A.C आणि A
A.C and A
A.C اور A

B.B आणि E
B.B and E
B.B اور E

C.C आणि B
C.C and B
C.C اور B

D.E आणि A
D.E and A
D.E اور A

Answer: B.B आणि E
B.B and E
B.B اور E

For More Info And Videos About TAIT-Exam Syllabus And Other Exam Visit My Channel
TAIT च्या 30 प्रश्नपत्रिका PDF
BADSHAHimp Available Request 9765226781
WWW.YouTube.com/BADSHAHimp
Subscribe My Channel

6 सूचना: अर्थपूर्ण परिच्छेद निर्माण करण्यासाठी, खाली दिलेली (P), (Q) (R), (S) आणि (T) ही पाच वाक्ये योग्य अनुक्रमाने पुनर्रचना करा; त्यांनतर खालील प्रश्नांची उत्तर द्या. P. बाळ कृष्ण मूठभर धान्य पकडले आणि दरवाजाकडे पळाला परंतु सर्व धान्य खाली सांडले.
Q. लवकरच तिला जाणवले कि तिची फळांच्या टोपली रत्न आणि सोन्याने भरलेली आहे.
R. कृष्णाला काही फळे हवी होती, त्याने त्या स्त्रीकडे फळे मागितली परंतु तिने त्याबदल्यात मोबदला मागितला.
S. ते पाहून, फळविक्रेती स्त्री श्रीकृष्णाकडे मोहित झाली आणि त्याच्या मुठीत जे काय असेल त्याबदल्यात सर्व फळे त्याला दिली.
T. एकेदिवशी फळविक्रेती स्त्री कृष्णाच्या घराजवळून निघाली होती.

पुनर्रचना केल्यानंतर खालीलपैकी कोणते वाक्य तिसरे असेल?

DIRECTION: Rearrange the following five sentences (P), (Q), (R), (S) and (T) in the proper sequence to form a meaningful paragraph; then answer the questions given below them.
P. Baby Krishna grabbed a handful of grains and ran towards the door but all the grains fell in the way.
Q. Soon she realized that her fruit basket was full of jewels and gold.
R. Krishna wanted to have some fruit, he asked the lady for fruit but the lady demanded something in return.
S. On seeing this, the fruit lady was completely smitten by Lord Krishna and gave him all the fruits in exchange for whatever was in his hands.
T. Once a lady who was selling fruits was crossing Shri Krishna's house.

Which of the following should be the THIRD sentence after rearrangement?

ہدایات: ان پانچ جملوں (P)، (Q)، (R)، (S) اور (T) کو با معنی پیرا بنانے کے لئے دوبارہ ترتیب دیجئے، پھر نیچے دے گئے سوالوں کے جواب دیجئے

P. بچہ کرشنا نے مٹھی بر اناج اٹھایا اور دروازے کی طرف باگا لیکن تمام اناج راستے میں گر گیا.
Q. جلدی اسکو احساس ہوا کی اسکی پھولوں کی ٹوکری جواہرات اور سونے سے بری ہے.
R. کرشنا کو کچھ میوہ چاہیے، اسنے عورت سے میوے کے لئے کہا لیکن عورت نے اسکے بدلے کچھ مانگا.
S. یے دیکھ کر، میوے والی عورت دیوتا کرشنا سے بہت متاثر ہوئی اور اسے سارے میوے دے دے بدلے اسکے کہ جو اسکے ہاتھ میں تھا.
T. ایک بار ایک میوہ بجھنے والی عورت شری کرشنا کے گھر سے گزری.

دوبارہ ترییب دینے کے بعد کون سا جملہ تیسرا ہونا چاہیے؟

A.P
A.P
A.P

B.Q
B.Q
B.Q

C.R
C.R
C.R

D.T
D.T
D.T

Answer: A.P
A.P
A.P

7 $2x^2 +11x+14=0$ या वर्गसमीकरणाची मुळे आहेत:

The roots of the quadratic equation $2x^2 +11x+14=0$ are:

$2x^2 +11x+14=0$ مربع مساوات کے روٹ ہیں:

A.7, 2
A.7, 2
A.7, 2

B.-7/2, -2
B.-7/2, -2
B.-7/2, -2

C.-5/2, -2
C.-5/2, -
C.-5/2, -

D.7/2, 2
D.7/2, 2
D.7/2, 2

Answer: B.-7/2, -2
B.-7/2, -2
B.-7/2, -2

8 केळे, सफरचंद, खजुर, अंजीर, मनुका, आणि जर्दाळू इत्यादी फळे आहेत

Fruits like banana, apple, dates, figs, raisins, and prunes etc. are

کیلا، سیب، کھجور ، انجیر، کشمش، اورپرونس پھل ہیں

A.कार्बोहायड्रेडस
A.Carbohydrates
A. کاربوہائیڈریٹ

B.प्रोटीन
B.Proteins
B. پروٹین

For More Info And Videos About TAIT-Exam Syllabus And Other Exam Visit My Channel
TAIT च्या 30 प्रश्नपत्रिका PDF
BADSHAHimp Available Request 9765226781
WWW.YouTube.com/BADSHAHimp
Subscribe My Channel

C.जीवनसत्व
C.Vitamins
C. وٹامن

D.वरीलपैकी सर्व
D.All of the above
D.اوپر کا سارا

Answer: A.कार्बोहायड्रेडस
A.Carbohydrates
A. کاربوہائیڈریٹ

9 ‘ छकविणे ‘ या शब्दाचा विरुद्धार्थी शब्द कोणता ?

A.फसविणे

B.प्रामाणिकपणे

C.लपविणे

D.ठकविणे

Answer: B.प्रामाणिकपणे

10 दिलेली अदलाबदल : चिन्हे ÷ आणि ×, तसेच आकडे 6 आणि 8 तर 6 × 8 ÷ 2 चे मूल्य किती ?

Given interchanges: signs ÷ and ×, and numbers 6 and 8; then the value of 6× 8 ÷ 2 is

دیئے گئے تبادلے: علامات ÷ اور ×، اور نمبر 6 اور 8؛ تو 6× 8 ÷ 2کی تعداد ہے

A.2
A.2
A.2

B.3
B.3
B.3

C.1.5
C.1.5
C.1.5

D.0.75
D.0.75
D.0.75

Answer: C.1.5
C.1.5
C.1.5

11 सरळ रूप द्या:
9999999 + 10000000 + 9999 + 100000 = ?

Simplify:
9999999 + 10000000 + 9999 + 100000 = ?

آسان بنائیں:
9999999 + 10000000 + 9999 + 100000 = ?

A.20109998
A.20109998
A.20109998

B.20108998
B.20108998
B.20108998

C.20107998
C.20107998
C.20107998

D.20109898
D.20109898
D.20109898

Answer: A.20109998
A.20109998
A.20109998

12 दोन संख्या 3:4 गुणोत्तरात आहेत. त्यांच्या लसावी आणि मसावीचा गुणाकार 300 आहे, संख्यांची बेरीज आहे?

Two numbers are in the ratio 3:4. The product of their H.C.F. and L.C.M. is 300. The sum of the numbers is?

دو اعداد کا تناسب 3: 4 ہیں۔ ان کے ایچ۔ سی۔ ایف اور ایل۔ سی۔ ایم۔ کاحاصل ضرب300 ہے۔ اعداد کا مجموعہ ہے؟

A.35
A.35
A.35

B.65
B.65
B.65

C.68
C.68
C.68

D.39
D.39
D.39

Answer: A.35
A.35
A.35

13 खालीलपैकी कोणते वनस्पतीच्या संवर्धनाच्या इन-सिटू पद्धतीचे स्थान नाही?

Which one of the following is not a site for in-situ method of conservation of flora?

درج ذیل میں سے کونسا پودوں کو محفوظ رکھنے کا اندرونی طریقہ نہیں ہے

A.बायोस्फीयर रिझर्व्ह
A.Biosphere Reserve
A. بایو اسفئر ریزرو

B.बोटॅनिकल गार्डन
B.Botanical Garden
B. بوٹینکل گارڈن

C.राष्ट्रीय उद्यान
C.National Park
C. نیشنل پارک

D.वन्यजीव अभयारण्य
D.Wildlife Sanctuary
D. وائلڈ سینکچری

Answer: B.बोटॅनिकल गार्डन
B.Botanical Garden
B. بوٹینکل گارڈن

14 पुढील म्हण पूर्ण करा - ‘आयत्या बिळात ---------.’

For More Info And Videos About TAIT-Exam Syllabus And Other Exam Visit My Channel
TAIT च्या 30 प्रश्नपत्रिका PDF
BADSHAHimp Available Request 9765226781
WWW.YouTube.com/BADSHAHimp
Subscribe My Channel

A.नागोबा

B.उंदीर

C.खेकडा

D.बिल्ली

Answer: A.नागोबा

15 समजा तुम्ही ट्रेनमध्ये प्रवास करत आहात. अचानक आपण आपल्या जुन्या विद्यार्थ्याला ओळखाल जो तुम्हाला ओळखण्याचा कोणताही इशारा ना देता तिथून निघतो. अशा स्थितीत आपण काय विचार कराल?

Suppose you are travelling in a train. All of a sudden you recognize your old student who is passing without any salutary mark. What will you think in such condition?

فرض کریں کہ آپ ایک ٹرین میں سفر کر رہے ہیں.اچانک آپ اپنے پرانے طالب علم کو دیکھتے ہیں جو بغیر کسی سلام دعا کے وہاں سے گزر جاتا ہے.ایسی حالت میں آپ کیا سوچیں گے؟

A.आपण स्वत: ला शाप करणार कारण आपल्या विद्यार्थ्याने कोणत्याही बाबतीत आदर दिला नाही
A.You will be cursing yourself as your student has not given any respect
A.آپ اپنے آپ پر لعنت بھیجیں گے کیونکہ آپ کے طالب علم نے آپ کا احترام نہیں کیا ہے

B.आपण विचार कराल की विद्यार्थी आपल्याला ओळखू शकत नाही
B.You will think that the student cannot recognize you
B.آپ سوچیں گے کہ طالب علم آپ کو پہچان نہیں سکا

C.आपण विद्यार्थ्यांमधील आधुनिक असभ्य वर्तनाचा शाप लावणार
C.You will be cursing the modern disrespectful trend in students
C.آپ طالب علموں میں جدید ناپسندیدہ رجحان پر لعنت بھیجیں گے

D.आपण आपल्या विद्यार्थ्यांशी संबंधित आणखी सुधारणा करण्यासाठी आत्मनिरीक्षण कराल
D.You will introspect in relation to your students for further improvement.
D.آپ مزید بہتر بنانے کے لئے اپنے طالب علموں کے ساتھ تعلق کی خود احتسابی کریں گے.

Answer: D.आपण आपल्या विद्यार्थ्यांशी संबंधित आणखी सुधारणा करण्यासाठी आत्मनिरीक्षण कराल
D.You will introspect in relation to your students for further improvement.
D.آپ مزید بہتر بنانے کے لئے اپنے طالب علموں کے ساتھ تعلق کی خود احتسابی کریں گے.

16 पुढील जोडशब्द पूर्ण करा . ‘ उलट ----------’

A.सुलट

B.उताणा

C.पलट

D.उत्तर

Answer: A.सुलट

17 मुख्य स्मृती ..... यासोबत सहजासहजी काम करते

Main memory works in conjunction with …….

مین میموری------ کے ساتھ استعمال ہوتا ہے۔

A.विशेष कार्य कार्ड
A. Special function cards
A.اسپیشل فنکشن کارڈ

B.रॅम
B. RAM
B.ریم (RAM)

C.सीपीयू
C. CPU
C.سی پی یو

D.इंटेल
D. Intel
D.انٹیل

Answer: C.सीपीयू
C. CPU
C.سی پی یو

18 मेंडसले_____करता प्रसिद्ध आहे.

The Mandsley is a famous

منڈلی ایک مشہور ہے

A.लंडनमधील मानसिक रुग्णालय
A.Mental hospital in London
A. لندن میں دماغی ہسپتال

B.वस्तूसूची
B.Inventory
B.انوینٹری

C.मानसिक क्षमता चाचणी
C.Mental ability test
C.دماغی صلاحیت کی جانچ

D.मानसिक उपचार
D.Psychological therapy
D.نفسیاتی تھراپی

Answer:

A.लंडनमधील मानसिक रुग्णालय
A.Mental hospital in London
A. لندن میں دماغی ہسپتال

19 सूचना: खालील प्रश्नांमध्ये दिलेल्या पर्यायांमधून संबंधित अक्षर/शब्द/संख्या निवडा.

बॉल : गोलाकार ::

DIRECTIONS: In the following question, select the related letter/word/number from the given alternatives.

Ball : Round ::

سمت: مندرجہ ذیل سوال میں، دیے گئے متبادل سے متعلقہ حرف/لفظ/نمبر منتخب کریں۔

:: گیند : گول

A.बॅट : लाकूड
A.Bat : Wood
A.بلا : لکڑی

B.गणित : क्रिकेट
B.Math : Cricket
B.ریاضی : کرکٹ

C.शंकू: शंकूच्या आकाराचे
C.Cone:Conical
C.مخروط:مخروطی

D.पुस्तक: : लांब
D.Book : Long
D.کتاب : لمبا

Answer: C.शंकू: शंकूच्या आकाराचे
C.Cone:Conical
C.مخروط:مخروطی

20

सूचना: दिलेल्या पर्यायांमधून श्रेणी पूर्ण करणारी योग्य आकृती निवडा.

DIRECTIONS: Complete the series by choosing right figure from the given choices.

ہدایات: دیئے گئے اختیارات میں صحیح شکل کا انتخاب کر کے سیریز کو مکمل کیجیئے۔

Problem Figures

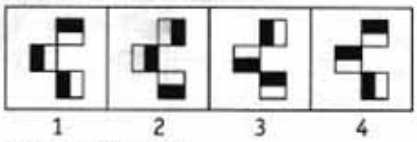

Answer Figures

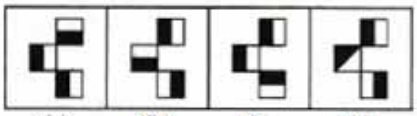

A. (A)

B. (B)

C. (C)

D. (D)

Answer: C. (C)

21

महात्मागांधींची अहिंसा आणि हिटलरचे नाझिम्स याचे उदाहरण आहे

Mahatma Gandhi’s non-violence and Hitler’s Nazism are examples of

مہاتما گاندھی کا عدم تشدد اور ہٹلر کا نازی ازم مثالیں ہیں:

A.केंद्रीय गुण
A.Central traits
A. مرکزی خصوصیت

B.माध्यमिक गुण
B.Secondary traits
B. ثانوی خصوصیت

C.मुख्य गुण
C.Cardinal traits
C.بنیادی خصوصیت

D.यापैकी एकही नाही
D.None of these
D.ان میں سے کوئی نہیں

Answer: C.मुख्य गुण
C.Cardinal traits
C.بنیادی خصوصیت

22 DIRECTIONS: A sentence with an underlined word is given below. Find the word which is opposite in meaning to the underlined word from the given options.
The reckless driver accelerated to overtake the bus.

A.Delayed

B.Hastened

C.Rushed

D.Hurried

Answer: A.Delayed

23 हिरे ग्रेफाइटपेक्षा कठोर आहे कारण-

Diamond is harder than Graphite because of—

_____ کی وجہ سے ہیرا گریفائٹ سے زیادہ سخت ہوتا ہے

A.अणू स्तरांचा फरक असतो
A.Difference of Layers of atom
A.ایٹم کی پرت میں اختلاف

B.हिरे परिष्कृत केलेले असतात
B. Diamonds are polished
B.ہیرا پالش ہوتاہے

C.स्फटिकमय संरचनेचा फरक आहे
C. Difference of crystalline structure
C.کرسٹلن ڈھانچہ کے تفریق

D.यापैकी एकही नाही
D. None of these
D.ان میں سے کوئی بھی نہیں

Answer: C.स्फटिकमय संरचनेचा फरक आहे
C. Difference of crystalline structure
C.کرسٹلن ڈھانچہ کے تفریق

24 जर $\frac{50}{*} = \frac{*}{12\frac{1}{2}}$ तर * चे मूल्य किती:

If $\frac{50}{*} = \frac{*}{12\frac{1}{2}}$ then the value of * is:

اگر $\frac{50}{*} = \frac{*}{12\frac{1}{2}}$ تو پھر * کی قدر ہے:

A. 25/2

B. 4/25

C. 4

D. 25

Answer: D. 25

25 सूचना: दिलेल्या पर्यायांमधून वेगळे ते बाहेर काढा.

DIRECTIONS: Find the odd one out from the given alternatives.

سمت: دیے گئے متبادل میں سے بے جوڑ کو تلاش کرو۔

A.मांजरे
A.CATS
A.بلیا

B.आंघोळ
B.BATH
B.غسل کرنا

C.घुबडे
C.OWLS
C.الو

D.बूल
D.BOUL
D.بول

Answer: D.बूल
D.BOUL
D.بول

26 जर बॅगेला जेवणाचा डबा म्हटले, जेवणाच्या डब्याला पर्स म्हटले, पर्सला कपाट म्हटले, कपाटाला ड्रॉवर म्हटले, ड्रॉवरला रॅक म्हटले आणि रॅकला टेबल म्हटले, तर आपण पैसे ठेवण्यासाठी काय वापरु?

If bag is called lunch box, lunch box is called purse, purse is called cupboard, cupboard is called drawer, drawer is called rack and rack is called table, we can use for putting money in

اگر بیگ کو ٹفن کا ڈبہ، ٹفن کے ڈبے کو بٹوا، بٹوے کو آلماری اور آلماری کو ہنڈی نویس، ہنڈی نویس کو شکنجہ، شکنجے کو میز کہا جائے، تو ہم پیسے کس میں رکھ سکتے ہیں

A.बॅग
A.Bag
A. بیگ میں

B.पर्स
B.Purse
B.بٹوا میں

C.ड्रॉवर
C.Drawer
C.دراج میں

D.कपाट
D.Cupboard
D.آلماریمیں

Answer: D.कपाट
D.Cupboard
D.آلماریمیں

27 डेसिबल एक आहे:

Decibel is a:

ڈیسیبل ایک _____ ہے۔

A.संगीतीक सूर
A.Musical note
A.میوزیکل نوٹ

B.संगीतिक वाद्य
B. Musical instrument
B.میوزیکل انسٹرومینٹ

C.आवाज तीव्रतेचे एकक
C. Unit of sound intensity
C.آواز کی شدت کی یونٹ

D.अंतराचे एकक
D. Unit of distance
D.مسافت کی یونٹ

Answer: C.आवाज तीव्रतेचे एकक
C. Unit of sound intensity
C.آواز کی شدت کی یونٹ

28 एका मुलाकडे बोट दाखवून, मीना म्हणते, “हा माझ्या वडीलांच्या वडिलांचा एकुलता मुलगा आहे. मग त्या मुलाचे मीनाशी नाते काय”?

Pointing to a boy, Meena said, "He is the only son of my father's father. How is the boy related to Meena?

لڑکے کی طرف اشارہ کرکے، مینا نے کہا،" یہ میرے باپ کے باپ کا واحد بیٹا ہے. لڑکے کا مینا سے کیا رشتہ تھا؟

A.भाऊ
A.Brother
A.بھائی

B.काका
B.Uncle
B.چچا

C.पुतण्या
C.Nephew
C.بتیجا

D.यापैकी एकही नाही
D.None of these
D.ان میں سے کوئی نہیں

Answer: D.यापैकी एकही नाही
D.None of these
D.ان میں سے کوئی نہیں

29 सामाजिक संवादातील कमजोरी, सामाजिक संवाद आणि सामाजिक कल्पकता_____ यात दिसून येते.

Impairment in social communication, social interaction and social imagination is seen in

سماجی رابطے، سماجی تعامل، سماجی تصور میں نُقص کو سمجھا جاتا ہے:

A.डाऊनचे सौलक्षण
A.Down's syndrome
A.ڈاؤن سنڈروم

B.एस्परर्जरचे सौलक्षण
B.Asperger syndrome
B.ایسپرجرس سنڈروم

C.मानसिक दुर्बलता
C.Mental retardation
C.دماغی کمی

D.यापैकी एकही नाही
D.None of these
D.ان میں سے کوئی نہیں

Answer: B.एस्परर्जरचे सौलक्षण
B.Asperger syndrome
B.ایسپرجرس سنڈروم

30 व्यक्तिमत्वाच्या अंधाऱ्या, नकोशा वाटणाऱ्या व आदिम बाजूचे प्रतिनिधित्व करणारे आदिमरूप

The Archetype that represents the dark, unwelcome and animalistic side of personality

آرک کی قسم جو اندھیرے کی نمائندگی کرتی ہے، شخصیت کا غیر خوشگوار اور شہوت پرستانہ رخ ہے

A.भूमिका
A.Persona
A.مضحکہ

B.सावली
B.Shadow
B.سایہ

C.नरप्रतिमा
C.Animus
C.انیمس

D.नारीप्रतिमा
D.Anima
D.انما

Answer: B.सावली
B.Shadow
B.سایہ

31 एका व्यक्तीचे वय हे त्याच्या मुलाच्या वयाच्या दुप्पट आहे. 20 वर्षांपूर्वी ती व्यक्ती त्याच्या मुलापेक्षा बार पट मोठी होती. वडीलांचे वर्तमान वय काय आहे (वर्षांमध्ये)

The age of a man is twice his son’s age. 20 years ago, the man was twelve times as old as his son. What is the present age of father (in years)

ایک آدمی کی عمر اس کے بیٹے کی عمر کے 2گنا ہے۔20 سال پہلے، آدمی کی عمر بیٹے کی عمر کے 12 گنا تھی۔اب والد کی موجودہ عمر (سالوں میں)کیا ہے؟

A.24
A.24
A.24

B.22
B.22
B.22

C.44
C.44
C.44

D.148
D.148
D.148

Answer: C.44
C.44
C.44

32 सूचना: हे प्रश्न खालील माहितीवर आधारित आहेत.
पाच मुले - A, B, C, D आणि E हे रांग - I मध्ये उत्तर दिशेकडे तोंड करून बसलेली आहेत, आणि पाच मुली - P, Q, R, S आणि T - रांग - II मध्ये दक्षिण दिशेकडे तोंड करून बसलेल्या आहेत, ते त्याच क्रमाने असतील असे नाही. रांग - I मधील प्रत्येक मुलगा रांग - II च्या बरोबर एका मुली सामोर आहे. त्यांच्याबद्दल खालील माहिती दिलेली आहे.
A आणि त्या मुलाच्या दरम्यान फक्त दोन लोक बसतात जो Q च्या सामोर आहे, आही जो कोणत्याही शेवटाला बसलेला नाही. C हा B च्या तत्काळ डाव्या बाजूला आहे, परंतु ते दोघे E च्या समीप नाहीत. P त्या मुलाच्या समोर आहे जो D च्या तत्काळ उजवीकडे आहे. D हा Q च्या समोर बसलेला नाही. R त्या मुलीच्या डाव्या बाजूस आहे जी D च्या सामोर आहे. C हा D च्या सामोर नाही.
S च्या कोण सामोर आहे?

DIRECTIONS: These questions are based on the following information.
Five boys – A, B, C, D and E – are sitting in row-I, facing North, and five girls – P, Q, R, S and T – are sitting in row-II facing South, not necessarily in the same order. Each boy in row - I is facing exactly one girl from row -II. The following information is known about them.
Only two persons sit between A and the boy who faces Q, who does not sit at any end. C is to the immediate left of B, but both of them are not adjacent to E. P is opposite the boy who is to the immediate right of D. D does not sit opposite Q. R is to the left of the girl who faces D. C does not face S.
Who faces S?

ہدایات: یہ سوالات مندرجہ ذیل معلومات پر مبنی ہیں۔
A اور Q کے درمیان صرف دو لوگ بیٹھے ہیں، جو کسی بھی سرے پر نہیں بیٹھا ہے۔ C، B کے فوری بائیں طرف ہے، لیکن وہ دونوں E مقابل نہیں ہیں۔ D اس لڑکے کے بالمقابل ہے جو P کے بغل میں نہیں ہیں۔ D، Q کے فوری دائیں طرف ہے۔ C، S کے سامنے نہیں ہے۔ R، D کا سامنا کرنے والی لڑکی کے بائیں طرف بیٹھی ہے۔ مقابل نہیں بیٹھا ہے۔
S کے سامنے کون ہے؟

A.A
A.A
A.A

B.B
B.B
B.B

C.D
C.D
C.D

D.E
D.E
D.E

Answer: C.D
C.D
C.D

33 **सूचना:** खालील प्रश्नात असे 3 घटक आहेत ज्यांचा परस्परांशी विशिष्ट संबंध आहे. समान संबंध वर्तुळाच्या संचांनी दर्शविलेला आहे, प्रत्येक वर्तुळ त्याचा आकार कितीही असला तरी, एका घटकाचे प्रतिनिधित्व करते. योग्य वर्तुळाच्या संचांशी खालील घटकांच्या जोड्या लावा.

DIRECTION: The question below has three items having certain relationship among them. The same relationship is expressed by sets of circles, each circle representing one item irrespective of its size. Match the items with right set of circles.

ہدایت:مندرجہ ذیل سوال میں تین آئٹم ہیں جن کے مابین مختلف تعلقات ہیں۔ دائروں کے ایک سیٹ کے ذریعہ یکساں تعلق ظاہر کیا جاتا ہے، ہر دائرہ سائز سے قطع نظر ایک آئٹم کی نمائندگی کرتا ہے۔ آئٹم کو دائروں کے درست سیٹ کے ساتھ ملائیں۔

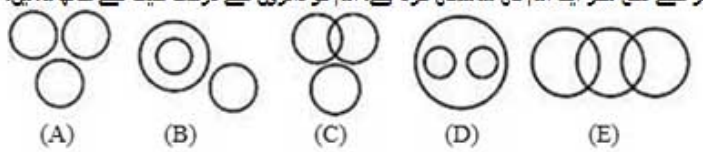

पोलिस, डॉक्टर, महिला

Police, Doctor, Female

پولیس، ڈاکٹر، عورت

A. (A)

B. (B)

C. (C)

D. (E)

Answer: D. (E)

34 कोणती संख्या तिन्ही आकृतींमध्ये उपस्थित आहे?

Which number is present in all the three figures?

تینوں اعداد و شمار میں کون سا نمبر موجود ہے؟

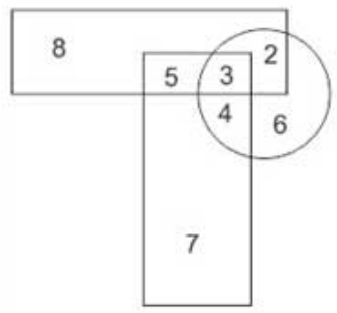

A. 2

B. 3

C. 4

D. 5

Answer:	B. 3

35	‘ मन मोठे करणे ‘ या वाक्प्रचाराचा अर्थ काय ?
	A.मनापासून लक्ष देणे
	B.मनात कायमचे राहणे
	C.उदारपणा दाखविणे
	D.मनात पक्का विचार करणे
Answer:	C.उदारपणा दाखविणे

36	खालीलपैकी कोणते आयन्य कठीण पाण्याचे प्रमुख घटक आहेत? Which of the following ions is the major constituent of hard water? مشکل پانی کے اہم جزو مندرجہ ذیل آئنوں میں سے کون ہے؟
	A.मॅग्नेशियम कार्बोनेट A.Magnesium carbonates A.میگنیشیم کاربنیٹس
	B.पारा ऑक्साईड B.Mercury Oxide B. مرکری آکسائڈ
	C.सोडियम क्लोराईड C.Sodium Chloride C. سوڈیم کلورائد
	D.वरीलपैकी सर्व D.All the above D. مندرجہ بالا تمام
Answer:	A.मॅग्नेशियम कार्बोनेट A.Magnesium carbonates A.میگنیشیم کاربنیٹس

37 सूचना: अर्थपूर्ण परिच्छेद निर्माण करण्यासाठी, खाली दिलेली (P), (Q) (R), (S) आणि (T) ही पाच वाक्ये योग्य अनुक्रमाने पुनर्रचना करा; त्यांनतर खालील प्रश्नांची उत्तर द्या. P. बाळ कृष्ण मूठभर धान्य पकडले आणि दरवाजाकडे पळाला परंतु सर्व धान्य खाली सांडले.
Q. लवकरच तिला जाणवले कि तिची फळांच्या टोपली रत्न आणि सोन्याने भरलेली आहे.
R. कृष्णाला काही फळे हवी होती, त्याने त्या स्त्रीकडे फळे मागितली परंतु तिने त्याबदल्यात मोबदला मागितला.
S. ते पाहून, फळविक्रेती स्त्री श्रीकृष्णाकडे मोहित झाली आणि त्याच्या मुठीत जे काय असेल त्याबदल्यात सर्व फळे त्याला दिली.
T. एकेदिवशी फळविक्रेती स्त्री कृष्णाच्या घराजवळून निघाली होती.

पुनर्रचना केल्यानंतर खालीलपैकी कोणते वाक्य पाचवे असेल?

DIRECTION: Rearrange the following five sentences (P), (Q), (R), (S) and (T) in the proper sequence to form a meaningful paragraph; then answer the questions given below them.
P. Baby Krishna grabbed a handful of grains and ran towards the door but all the grains fell in the way.
Q. Soon she realized that her fruit basket was full of jewels and gold.
R. Krishna wanted to have some fruit, he asked the lady for fruit but the lady demanded something in return.
S. On seeing this, the fruit lady was completely smitten by Lord Krishna and gave him all the fruits in exchange for whatever was in his hands.
T. Once a lady who was selling fruits was crossing Shri Krishna's house.

Which of the following should be the FIFTH sentence after rearrangement?

ہدایات: ان پانچ جملوں (P)، (Q)، (R)، (S) اور (T) کو با معنی پیرا بنانے کے لئے دوبارہ ترتیب دیجئے، پھر نیچے دے گئے سوالوں کے جواب دیجئے

P. بچہ کرشنا نے مٹھی بر اناج اٹھایا اور دروازے کی طرف باگا لیکن تمام اناج راستے میں گر گیا.
Q. جلدی اسکو احساس ہوا کی اسکی پھولوں کی ٹوکری جواہرات اور سونے سے بری ہے.
R. کرشنا کو کچھ میوہ چاہیے، اسنے عورت سے میوے کے لئے کہا لیکن عورت نے اسکے بدلے کچھ مانگا.
S. یے دیکھ کر، میوے والی عورت دیوتا کرشنا سے بہت متاثر ہوئی اور اسے سارے میوے دے دے بدلے اسکے کہ جو اسکے ہاتھ میں تھا.
T. ایک بار ایک میوہ بجھنے والی عورت شری کرشنا کے گھر سے گزری.

دوبارہ ترییب دینے کے بعد کون سا جملہ پانچوہ ہونا چاہیے؟

A.Q
A.Q
A.Q

B.P
B.P
B.P

C.T
C.T
C.T

D.S
D.S
D.S

Answer: A.Q
A.Q
A.Q

38 समजा तुम्ही महत्वाकांक्षी शिक्षक आहात, आपण वर्गाच्या शिक्षणासाठी उच्च आदर्श राखलेले आहात परंतु तुमची मेहनत व्यर्थ ठरली आहे. कारण विद्यार्थी परिणाम समाधानकारक नाही आहे या समस्येचे कारण आहे

Suppose you are an ambitious teacher. You have high ideals for class-room teaching but your hard-labor goes in vain. The reason is that the students result is not satisfactory. The reason of this problem is-

فرض کریں آپ ایک پرجوش استاد ہیں.آپ کے پاس کلاس روم کے درس کے لئے اعلی نظریات موجود ہیں لیکن آپ کی محنت ضائع جاتی ہے.وجہ یہ ہے کہ طالب علم کا نتیجہ تسلی بخش نہیں ہے.اس مسئلہ کی وجہ یہ ہے-

A.विद्यार्थ्यांच्या शैक्षणिक स्तरावर घट
A.Downfall in the educational level of the students
A.طالب علموں کی تعلیمی سطح میں کمی

B.आपले अहंकारी वर्तन विद्यार्थ्यांच्या पातळी पली कडचे आहे
B.Your egoistic teaching behavior beyond student's own level
B.آپ کا انا والا تدریسی طرز عمل طالب علم کے اختیار سے باہر ہے.

C.विद्यार्थ्यांमध्ये वैयक्तिक मतभेद
C.Individual differences among the students
C.طالب علموں کے درمیان انفرادی اختلافات

D.विद्यार्थ्यांना शिक्षण घेण्याची संधी नसणे
D.The teaching has no access to students.
D.اساتذہ کو طلباء تک رسائی نہیں ہے.

Answer: C.विद्यार्थ्यांमध्ये वैयक्तिक मतभेद
C.Individual differences among the students
C.طالب علموں کے درمیان انفرادی اختلافات

39 खालीलपैकी कोणता धातू विद्युयत चुंबक म्हणून वापरले जाऊ शकत नाही?

Which one of the following metals cannot be used as an electromagnet?

مندرجہ ذیل میں سے کس دھات کا استعمال ایک الیکٹرومیگنیٹک کے طور پر نہیں کیا جا سکتاہے؟

A.लोखंड
A. Iron
A.لوہا

B.तांबे
B. Copper
B.تانبا

C.निकेल
C. Nickel
C.نکل (نقلی چاندی)

D.कोबाल्ट
D. Cobalt
D.کوبالٹ

Answer: B.तांबे
B. Copper
B.تانبا

40 निर्देश: खालील प्रश्न दिलेल्या शब्दांवर आधारित आहेत.

Hell/ Valuable/ Reify/ Plethoric/ Story

जर दिलेल्या शब्दांमध्ये स्वरांना मागील अक्षराने बदलले तर व्यंजनाची जागा त्याच्या पुढच्या अक्षराने बदलली तर किती शब्दन मध्ये किमान एक स्वर असेल?

DIRECTIONS: Following question is based on the given words.

Hell/ Valuable/ Reify/ Plethoric/ Story

If in the given words vowels are replaced with its previous letter and Consonant are replaced with its next letter then how many words have at least one vowel?

ہدایت جیل کے سوال دے ہے لفجونپر مشتمل ہیں

Hell/ Valuable/ Reify/ Plethoric/ Story

اگر ان لفجوں مے ہر حرف کو انگریجی حرف تہجیبی کے اگلے حرف سے بدلہ جائے تو صرف یک واول والے کتنے لفج ہونگے؟

A.एक
A.One
A.ایک

B.दोन
B.Two
B.دو

C.तीन
C.Three
C.تین

D.चार
D.Four
D.چار

Answer: C.तीन
C.Three
C.تین

41 DIRECTIONS: A sentence with an underlined word is given below. Find the Word which is most similar in meaning to the underlined word.
Shalini revealed her benevolent side when she offered to help Cynthia with her homework.

A.Generous

B.Selfish

C.Cruel

D.Unkind

Answer: A.Generous

42 सामान्य बुद्धी क्षमतेची समुह चाचणी यांच्याद्वारे सांगितली गेली

Group test of general mental ability was given by

گروپ ٹسٹ برائے عام دماغی لیاقت انجام پایا بذریعہ:

A.एस. जलोटा
A.S. Jalota
A.ایس۔ جلوٹا

B.उदय शंकर
B.Uday Shankar
B. اُدَدے شنکر

C.एस.के. कुलश्रेष्ठ
C.S.K. Kulshreshtha
C.ایس۔کے کُلسریشتھا

D.एम.सी. जोशी
D.M.C. Joshi
D.ایم۔سی۔جوشی

Answer: A.एस. जलोटा
A.S. Jalota
A.ایس۔ جلوٹا

43 संतुलनाच्या संकल्पनेमध्ये P – O – Xत, “X” म्हणजे

In concept of balance P – O – X, “X” stands for

توازن کے تصور کے نظریے P – O – X,میں X کا فُل فارم ہے:

A.मनोवृत्ती पदार्थ (एटिट्यूड ऑब्जेक्ट)
A.Attitude Object
A.Attitude Object (رویے کی موضوعیت)

B.कल्पक स्थिती (हायपोथेटिकल सिच्युएशन)
B.Hypothetical condition
B.Hypothetical condition (افتراضی حالت)

C.कल्पक स्थिती(इम्याजनरी सिचुएशन)
C.Imaginary situation
C.Imaginary situation (خیالی کیفیت)

D.नातेसंबंध (रिलेशनशिप)
D.Relationship
D.Relationship (رشتہ داری)

Answer: A.मनोवृत्ती पदार्थ (एटिट्यूड ऑब्जेक्ट)
A.Attitude Object
A.Attitude Object (رویے کی موضوعیت)

44 **सूचना**: खाली A, B, C, आणि D नावाच्या चार आकृत्या दिल्या आहेत, त्यापैकी तीन आकृत्या एका श्रेणीत आहेत किंवा त्यांच्यात या ना त्या प्रकारे साम्य आहे. वेगळी (असंबद्ध) असणारी आकृती निवडा.

DIRECTIONS: Three of the four figures marked A, B, C, and D are in sequence or similarity in some way or the other, while one of them is different from the rest. You have to choose the figure which is different (odd).

ہدایات: چار شکلوں میں سے جن پر A، B، C اور D کے نشان لگائے گئے تین ایسی شکلوں چنئے، جو ہو بہو ایک جیسی ہے اور جو شکل ان سے ہٹکے ہے، اسکو جانیئے

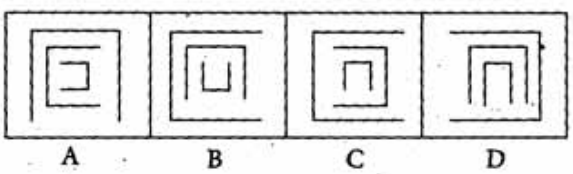

A. (A)

	B. (B)
	C. (C)
	D. (D)
Answer:	D. (D)

45	AP 5, 9, 13, 17, ... च्या कोणत्या अनुक्रमाचे पद 81 आहे? Which term of the A.P. 5, 9, 13, 17, ... is 81? 5, 9, 13, 17, ... 81 س سرج کی کونسی ٹرم ہے؟
	A.14 A.14 A.14
	B.16 B.16 B.16
	C.18 C.18 C.18
	D.20 D.20 D.20
Answer:	D.20 D.20 D.20

46	9 आणि 12 चे तृतीय गुणोत्तर आहे: Third proportional to 9 and 12 is 9 اور 12 کا تیسرا نسبتی کیا ہے؟
	A.6 A.6 A.6

	B.10 B.10 B.10
	C.16 C.16 C.16
	D.5 D.5 D.5
Answer:	C.16 C.16 C.16

47	**निर्देश**: खालील प्रश्नांमध्ये प्रश्न चिन्हाच्या (?) जागी कोणते अंदाजे मूल्य यायला हवे? (तुम्ही अचूक मूल्य काढण्याचे अपेक्षित नाही). **DIRECTIONS**: What approximate value should come in place of the question mark (?) in the following questions? (You are not expected to calculate the exact value) ہدایات: مندرجہ ذیل سوال میں سوال کا نشان (?) کی جگہ پر کون سا تخمینہ ویلیو آئے گا - (آپ کو صحیح ویلیو نکالنے کی ضرورت نہیں ہے) $\sqrt{3697} + 0.15 \times 78 = ?$
	A. 72
	B. 68
	C. 75
	D. 60
Answer:	A. 72

48	निर्देश: मालिका पूर्ण करा E, H, K, N, Q, ?, W, Z DIRECTION: Complete the series E, H, K, N, Q, ?, W, Z ہدایت اس سرج کو مکمّل کرو E, H, K, N, Q, ?, W, Z
	A.T A.T A.T
	B.N B.N B.N
	C.O C.O C.O
	D.V D.V D.V
Answer:	A.T A.T A.T

49 सूचना: या प्रश्नांमध्ये पर्याय A आणि B यांच्या सहित दोन विधाने दिलेली आहेत. जरी सामान्यपणे माहीत असलेल्या तथ्यांबरोबर जुळत नसले तरी खालील विधाने बरोबर आहेत असे समजून तुमचे योग्य उत्तर लिहा:
सर्व P's , Q's आहेत.
सर्व Q's , R's आहेत. म्हणून,
A: सर्व P's , R's आहेत.
B: सर्व R's , P's आहेत.

DIRECTION: In these questions, two statements are given, followed by two inferences A and B. Assume the statements to be true even if they are at variance with the known facts and then mark your answer as:

All P's are Q's.
All Q's are R's. So,
A: All P's are R's.
B: All R's are P's.

ہدایت:ان سوالات میں، دو بیانات دیے گئے ہیں، جن کے بعد دو تجاویز A اور B دیے گئے ہیں۔ بیانات کے درست ہونے کو تسلیم کریں اگرچہ وہ عام طور پر معلوم حقائق کے برعکس ہوں اور پھر اس کے مطابق اپنا جواب نشان زد کریں:

سبھی P ، Q ہیں۔
سبھی Q ، R ہیں۔ لہٰذا،

A: سبھی P ، R ہیں۔
B: سبھی R ، P ہیں۔

A.जर केवळ पर्याय (A) असल्यास.
A.If only inference (A) follows
A.صرف تجویز (A) پیروی کرتا ہے۔

B.जर केवळ पर्याय (B) असल्यास.
B.If only inference (B) follows
B.صرف تجویز (B) پیروی کرتا ہے۔

C.जर दोन्ही पर्याय (A) आणि (B) असल्यास.
C.If both (A) and (B) follow
C.(A) اور (B) دونوں پیروی کرتے ہیں۔

D.जर दोन्ही पर्याय (A) आणि (B) नसल्यास.
D.If neither (A) nor (B) follows
D.نہ تو (A) نہ ہی (B) پیروی کرتے ہیں۔

Answer: A.जर केवळ पर्याय (A) असल्यास.
A.If only inference (A) follows
A.صرف تجویز (A) پیروی کرتا ہے۔

50	खालीलपैकी शुद्ध वाक्य कोणते ?
	A.सभेत उठून येण्यास अधिकार त्याने राखून ठेवला.
	B.सभेला उठून येण्यास अधिकार त्याने राखून ठेवला.
	C.सभेमधे उठून येण्याचा अधिकार त्याने राखून ठेवला.
	D.सभेतून उठून येण्याचा अधिकार त्याने राखून ठेवला.
Answer:	D.सभेतून उठून येण्याचा अधिकार त्याने राखून ठेवला.

51	ल्युईस कॅरोल यांचे एक लोकप्रिय पुस्तक आहे Lewis Carol's one of the famous book is لیوس کیرول کی سب سے ایک مشہور کتاب ہے
	A.ॲलिस इन वंडरलँड A.Alice in wonderland A.ایلس ان ونڈرلینڈ
	B.गुडनाईट मून B.Goodnight Moon B.گُڈ نائٹ مون
	C.फेअरी टेल्स C.Fairy tales C.فیئری ٹیلس
	D.द कॅट इन द हॅट D.The Cat in the hat D.دی کیٹ ان دی ہیٹ
Answer:	A.ॲलिस इन वंडरलँड A.Alice in wonderland A.ایلس ان ونڈرلینڈ

52 विद्यार्थ्यां मध्ये वर्गात पहिल्या बाकड्या बसण्यासाठी स्पर्धा असते, या समस्येवर मात करण्यासाठी आपण बसण्याच्या व्यवस्था करणार आहात. विद्यार्थ्यांना जागा वाटपाचा तर्क काय असेल?

Generally the students have throat-cut competition to sit on front benches in the class. To overcome this problem you will be making seating arrangements. What will be the rationale of seat allocation to the students?

عموما طالب علموں کو کلاس میں سامنے بینچ پر بیٹھنے کے لئے سخت مقابلہ ہوتا ہے.اس مسئلے پر قابو پانے کے لئے آپ بیٹھنے کے انتظامات کریں گے.طالب علموں کو نشست کی تخصیص کا کیا تناسب ہوگا؟

A.विद्यार्थ्यांची वय आणि उंची
A.The age and height of the students
A.طالب علموں کی عمر اور اونچائی

B.मुलांशी वैयक्तिक संबंध
B.The personal relationship with the child
B.بچے کے ساتھ ذاتی تعلقات

C.मुलांचा मानसिक स्तर
C.The mental level of the children
C.بچوں کی ذہنی سطح

D.मुलाची आर्थिक आणि सामाजिक स्थिती
D.The economic and social status of the child.
D.بچے کی اقتصادی اور سماجی حیثیت.

Answer: A.विद्यार्थ्यांची वय आणि उंची
A.The age and height of the students
A.طالب علموں کی عمر اور اونچائی

53 विधान:
गेल्या काही महिन्यांमध्ये सागरी किनारपट्टीतील अनेक लोक श्वसन रोगाचे ग्रस्त झाले आहेत.

कृतीचा कोर्स:
I. प्रभावित व्यक्तींना वैद्यकीय मदत देण्यासाठी शासनाने त्वरीत आरोग्य व्यावसायिकांची एक टीम ताबडतोब पाठवावी.
II. अशा रुग्णांना ग्रस्त असलेले लोक विशेष वॉर्डमध्ये ठेवले पाहिजेत आणि योग्य औषधे घेतल्या पाहिजेत.

Statement:
Many people in the coastal town have been suffering from respiratory diseases during past few months.

Course of actions:
I. The Government should immediately send a team of health professionals to provide medical care to the affected people.
II. The people suffering from such diseases should be kept in a special ward and put through proper medication.

بیان:
پچھلے چند ماہ کے دوران ساحلی قصبے کے بہت سے لوگ سانس کی بیماریوں میں مبتلا ہو رہے ہیں۔

لائحہ عمل:
I۔ حکومت کو متاثرہ افراد کی طبی دیکھ بھال کے لیے فوراً میڈیکل پروفیشنلز کی ایک ٹیم بھیجنی چاہیے۔
II۔ ایسی بیماریوں میں مبتلا افراد کو اسپیشل وارڈ میں رکھا جانا چاہیے اور مناسب دوائیں دی جانی چاہئیں۔

A.फक्त I अनुसरून आहे.
A.Only I follows
A. صرف I لاگو ہو گا۔

B.फक्त II अनुसरण करते आहे
B.Only II follows
B. صرف II لاگو ہو گا۔

C.एकतर I किंवा II अनुसरून आहे
C.Both I and II follow
C. I یا II میں سے ایک لاگو ہو گا۔

D.I किंवा II दोन्हीपैकी काहीही अनुसरण करत नाही
D.Neither I nor II follows
D. I اور II میں سے کوئی بھی لاگو نہیں ہو گا۔

Answer: C.एकतर I किंवा II अनुसरून आहे
C.Both I and II follow
C. I یا II میں سے ایک لاگو ہو گا۔

54

एका घनाकृतीच्या तीन अवस्था दाखविल्या आहेत. त्यांवर अवलंबून हे शोधून काढा की दिलेल्या घनाकृतीमध्ये 6 या अंकाच्या विरुद्ध बाजूला कोणता अंक असेल?

Three positions of a cube are given. Based on them, find out, which number is found opposite number 6 in a given cube?

ہدایات: ایک کیوب کی تین حالتیں دی گئی ہیں۔ ان کی بنیاد پر، دریافت کیجیئے، کونسا نمبرکیوب میں دیئے گئے 6 نمبر کی اپوسٹ ہے ؟



A. 3

B. 5

C. 1

D. 6

Answer: A. 3

55

भारताचे अल्पसंख्याक व्यवहार मंत्री कोण आहेत?

Who is the Minister of Minority Affairs for India?

بھارت کے وزیر اقلیتی امور ہیں۔

A. पीयूष गोयल
A.Piyush Goyal
A. پیوش گویل

B.प्रकाश जावडेकर
B.Prakash Javdekar
B. پرکاش جاوڈیکر

C.मुख्तार अब्बास नक़ी
C.Mukhtar Abbas Naqvi
C. مختار عباس نقوی

D.धर्मेंद्र प्रधान
D.Dharmendra Pradhan
D. دھرمیندر پتھان

Answer: C.मुख्तार अब्बास नक़ी
C.Mukhtar Abbas Naqvi
C. مختار عباس نقوی

56 शिक्षकांना वर्गाचा नेता असे म्हणतात. या टोपणनावाचे समर्थन हे आहे

The teacher is called the leader of the class. The justification of this nickname is—

اساتذہ کو کلاس کا رہنما کہا جاتا ہے۔اس عرفیت کی وضاحت یہ ہے—

A.कारण राजकीय नेत्यासारखे वक्तृत्व कलात्मकतेचे ते स्वामी आहेत
A.Because he masters the art of oratory like a political leader
A.کیونکہ اس نے ایک سیاسی رہنما کی طرح اوریٹری کے فن میں مہارت حاصل کی ہے

B.तो आपल्या वर्गाचा निश्चयी साम्राज्य आहे म्हणून
B.Because he is the autocratic emperor of his class
B.کیونکہ وہ اپنی کلاس کا خود مختار شہنشاہ ہے

C.कारण तो शिक्षकांच्या संघाशी संबंधित आहे
C.Because he belongs to recognized teacher's union
C.کیونکہ وہ معروف ٹیچر کے اتحاد سے تعلق رکھتے ہیں

D.एखाद्या विशिष्ट विषय / संकल्पना / कला बद्दल विद्यार्थ्यांच्या मानसिकतेला आकार देण्याची त्यांची शक्ती असल्यामुळे
D.Because he has the power to shape the student's mentality about a particular subject/concept/art.
D.کیونکہ اس کے پاس ایک خاص موضوع / تصور / فن کے بارے میں طالب علم کی ذہنیت کو تبدیل کرنے کی طاقت ہے.

Answer: D.एखाद्या विशिष्ट विषय / संकल्पना / कला बद्दल विद्यार्थ्यांच्या मानसिकतेला आकार देण्याची त्यांची शक्ती असल्यामुळे
D.Because he has the power to shape the student's mentality about a particular subject/concept/art.
D.کیونکہ اس کے پاس ایک خاص موضوع / تصور / فن کے بارے میں طالب علم کی ذہنیت کو تبدیل کرنے کی طاقت ہے.

57 केरळची सायलेंट दरी —

The Silent valley of Kerala —

کیرالہ کی خاموش وادی

A.भारतातील केवळ एक एव्हरग्रीन जंगल आहे
A.Is only Evergreen Forest in India
A. بھارت کا واحد سدا بہار جنگل ہے

B.महागड्या बांधकाम लाकडाची झाडे आहेत
B.Has trees of expensive construction wood
B.مہنگی عمارتی لکڑی کے درخت ہیں

C.सहलीचा स्पॉट म्हणून प्रसिद्ध आहे
C.Is famous for picnic spot
C. پکنک کی جگہ کے لئے مشہور ہے

D.वनस्पती आणि प्राण्यांच्या दुर्मिळ प्रजाती आहे
D.Has rare species of Flora and Fauna
D. پودوں اور فونا کی کئی نسلیں ہیں

Answer: D.वनस्पती आणि प्राण्यांच्या दुर्मिळ प्रजाती आहे
D.Has rare species of Flora and Fauna
D. پودوں اور فونا کی کئی نسلیں ہیں

58 प्रश्न चिन्हाच्या (?) जागी योग्य ठरणारी आकृती अंकांनी दर्शविलेल्या चार आकृतींमधून शोधून काढा.

Choose an appropriate figure from the four numbered figures for the place of the questions mark (?).

نشان لگی چار شکلوں میں سے، مناسب شکل کا انتخاب کرکے اسے سوالی نشان کی جگہ رکھنے کے لئے

प्रश्न आकृती
Problem Figure
سوالی شکل

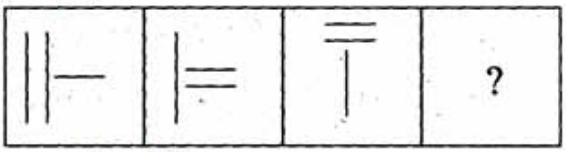

उत्तरासाठी पर्यायी आकृत्या
Answer Figure
جوابی شکل

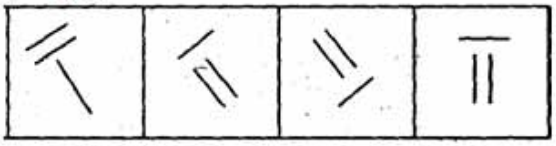

A. (A)

B. (B)

C. (C)

D. (D)

Answer: D. (D)

59	गुणाकार करा: 5674 × 352 = ? Multiply: 5674 × 352 = ? ضرب دیں: 5674 × 352 = ?
	A.1654221 A.1654221 A.1654221
	B.1789221 B.1789221 B.1789221
	C.2666118 C.2666118 C.2666118
	D.1997248 D.1997248 D.1997248
Answer:	D.1997248 D.1997248 D.1997248
60	मूल कोणत्या टप्प्यात आत्म-केंद्रीत दिसतं Child looks self-centered in which stage بچہ کس مرحلہ میں خود پرست نظرآتا ہے
	A.सुरुवातीचे बालपण A.Early childhood A.ابتدائی بچپن
	B.कुमारवय B.Adolescent B.سن بلوغیت
	C.वयात येण्याचा मधला टप्पा C.Middle adulthood C.وسط بچپن

D.अर्भकावस्थ
D.infancy
D.شیرخوارگی

Answer:
A.सुरुवातीचे बालपण
A.Early childhood
A.ابتدائی بچپن

61
भारताचे राष्ट्रगीत यांनी लिहिली

India’s national song was written by –

بھارت کا قومی گئیت کسنے لکھا تھا؟

A.बंकिम चंद्र चटोपाध्याय
A.Bankim Chandra Chattopadhyay
A.بنکم چندر چٹویا دھیائے

B.रवींद्रनाथ टागोर
B.Rabindranath Tagore
B.رویندر ناتھ ٹیگور

C.ईश्वर चंद्र विद्यासागर
C.Ishwar Chandra Vidyasagr
C.ایشور چندر ودھیاساگر

D.यांपैकी कोणतेही नाही
D.None of these
D.انمیں سے کوئی نہیں

Answer:
A.बंकिम चंद्र चटोपाध्याय
A.Bankim Chandra Chattopadhyay
A.بنکم چندر چٹویا دھیائے

62
एखादे मूल आपले उदरनिर्वाह साठी अर्धवेळ नोकरी करीत आहे, ज्यामुळे तो काही वर्ग चुकवण्यास भाग पडला त्या विद्यार्थ्याला आपण काय सल्ला द्याल ?

A child is doing part-time job to earn his livelihood. But it has forced him to miss some classes unwillingly. What suggestion will you put forth in that student’s favor?

بچہ اپنے معیشت کو کمانے کے لئے جز وقتی کام کرتا ہے.لیکن اس نے اسے مجبور کر دیا ہے کہ وہ کچھ کلاسوں کو نہ چاہتے ہوئے چھوڑ دے.آپ اس طالب علم کے حق میں کیا مشورہ دیں گے؟

A.अधिक पैसे कमविण्यासाठी शाळेला सोडणे चांगले
A.It is better to leave the school in order to earn more money
A.زیادہ سے زیادہ پیسہ کمانے کے لئے سکول کو چھوڑ دینا بہتر ہے

B.कोर्ससह सुसज्ज होण्यासाठी आपल्या शिकवणीच्या वर्गांमध्ये सामील होणे
B.Better to join your tuition classes to equip with the course
B.کورس کے ساتھ مزید آلات شامل کرنے کے لئے آپ ٹیوشن کلاس میں شامل ہوتے ہیں.

C.नियमित अनुपस्थितीबद्दल प्रिन्सिपलमध्ये अहवाल देणे
C.Reporting to the principal about regular absence
C.مسلسل غیر حاضری کے بارے میں پرنسپل کو اطلاع

D.वरीलपैकी काहीही नाही
D.None of the above
D.اوپر سے کوئی بھی نہیں

Answer: D.वरीलपैकी काहीही नाही
D.None of the above
D.اوپر سے کوئی بھی نہیں

63 Fill in the blank with the correct article.
She plays_____ violin with great expression .

A.the

B.a

C.an

D.No article required

Answer: A.the

64 मार्क झुकरबर्ग हे _____चे संस्थापक आहे

Mark Zuckerberg is the founder of –

مارک ذکر برگ نے نینو رکھی

A.गुगल
A.Google
A.گوگل کی

B.मायक्रोसॉफ्ट
B.Microsoft
B.مائکرو سافٹ کی

C.फेसबुक
C.Facebook
C.فیس بک کی

D.युट्यूब
D.YouTube
D.یوٹیوب کی

Answer: C.फेसबुक
C.Facebook
C.فیس بک کی

65 सूचना: दिलेल्या पर्यायांमधून वेगळे ते बाहेर काढा.

DIRECTIONS: Find the odd one out from the given alternatives.

سمت: دیے گئے متبادل میں سے بے جوڑ کو تلاش کرو۔

A.HEWAT
A.HEWAT
A.HEWAT

B.CERI
B.CERI
B.CERI

C.ROWAJ
C.ROWAJ
C.ROWAJ

D.EECRALS
D.EECRALS
D.EECRALS

Answer: D.EECRALS
D.EECRALS
D.EECRALS

66 जर एखाधा विद्यार्थ्याने आपल्या काळात बेशुद्ध होतो, तर तुम्ही काय कराल?

If a student becomes unconscious during the period, what will you like to do?

اگر سبق کے دوران کوئی طالب علم بے ہوش ہو تو، آپ کیا کرنا پسند کریں گے؟

A.घाईघाईने प्राचार्य कार्यालया कडे धाव घेणार आणि अधीरतेने मदतीसाठी विचारणार
A.Hurriedly rushing to the principal's office and canvassing for help impatiently
A.جلدی سے پرنسپل آفس جاتے ہیں اور فوری مدد کے لئے اقدامات کریں گے.

B.विद्यार्थ्याला प्राथमिक उपचार देऊन शाळेच्या डॉक्टरांशी संपर्क साधण्याचा प्रयत्न कराल
B.Giving first aid to the student and try to contact the school's doctor
B.طالب علم کو ابتدائی امداد دینا اور اسکول کے ڈاکٹر سے رابطہ کرنے کی کوشش

C.विद्यार्थ्याच्या घरी संदेश पाठवणार आणि त्याच्या पालकांना वाट पाहणार
C.Sending message to student's home and awaiting for his parents
C.طالب علم کے گھر پر پیغام بھیج کر اسکے والدین کا انتظار

D.विद्यार्थ्यांला त्याच्या घरी पाठविण्याची व्यवस्था करणार
D.Making arrangements to send the student to his home.
D.طالب علم کو اپنے گھر بھیجنے کے لئے انتظامات کرنا.

Answer: B.विद्यार्थ्याला प्राथमिक उपचार देऊन शाळेच्या डॉक्टरांशी संपर्क साधण्याचा प्रयत्न कराल
B.Giving first aid to the student and try to contact the school's doctor
B.طالب علم کو ابتدائی امداد دینا اور اسکول کے ڈاکٹر سے رابطہ کرنے کی کوشش

67 निर्देश: खालीदिलेल्या अक्षराच्या क्रमात काही अक्षरे गहाळ केली आहेत ते त्या क्रमाने खाली दिलेल्या पर्यायांपैकी एक आहे

a_ bc _ b _ ac _ a _cb_

DIRECTIONS: In each of the following letter series, same of the letters are missing which are given in that order as one of the alternatives below it.

a_ bc _ b _ ac _ a _cb_

دایت جیل کے حرف سرج میں کوئی حرف گمشدہ ہے آپکو انکی شناخت جیل کے اختیارات سے کرنی ہے

a_ bc _ b _ ac _ a _cb_

A.abcbc
A.abcbc
A.abcbc

B.ababc
B.ababc
B.ababc

C.abcab
C.abcab
C.abcab

D.acbcab
D.acbcab
D.acbcab

Answer: D.acbcab
D.acbcab
D.acbcab

68 ‘ विषन्न ’ या शब्दाचा विरुद्धार्थी शब्द कोणता ?

A.खिन्न

B.उदास

C.विषबाधा

D.प्रसन्न

Answer: D.प्रसन्न

69 ओढ (मेनिया) मध्ये खालीलपैकी एक वगळता सर्व आढळते

Mania shows all of the below except one

جنون میں درج ذیل سبھی نظرآتا ہے سوائے ایک

A.हर्षातिरेक
A.Euphoria
A.بشاشت

B.विनोद
B.Humor
B.مزاح

C.अति चळवळ
C.Hyperactivity
C.تیز رفتاری

D.विचारविषयक विकार
D.Thought disorder
D.سوچ کی خرابی

Answer:	B.विनोद B.Humor B.مزاح

70	पुढील संख्या संचाची सरासरी काय असेल? 67, 21, 23 What will be the average of the following set of numbers? 67, 21, 23 دئے ہوئے اعداد کا اوسط ہوگا 67,21,23
	A.31 A.31 A.31
	B.39 B.39 B.39
	C.45 C.45 C.45
	D.37 D.37 D.37
Answer:	D.37 D.37 D.37

71	Out of the given options, choose the one which is the correct indirect speech of the sentence given below. They said, “we were enjoying the weather”
	A.They say that they were enjoying the weather.
	B.They say that they had enjoyed the weather.
	C.They say that they have been enjoying the weather.
	D.They said that they had been enjoying the weather.

Answer: D.They said that they had been enjoying the weather.

72 $25^{6251}+ 36^{528}+ 73^{54}$ पदावलीमधील एकक स्थानचा अंक?

The units digit of the expression $25^{6251}+ 36^{528}+ 73^{54}$ is?

$25^{6251} + 36^{528} + 73^{54}$ کے پھیلانے میں میں یونٹ ہندسہ ہے؟

A.6
A.6
A.6

B.5
B.5
B.5

C.4
C.4
C.4

D.0
D.0
D.0

Answer: D.0
D.0
D.0

73 सूचना: खालील प्रत्येक प्रश्नात, तीन विधाने दिली आहेत, ज्यांच्यानंतर चार निष्कर्ष आहेत ज्यांना I, II आणि III असे अंकित केले आहे. सर्वसामान्यपणे ज्ञात असलेल्या तथ्यांशी विसंगती असली तरीही, हे सत्य असल्याचे तात्पुरते मानून, सामान्यतः ज्ञात असलेल्या तथ्यांकडे दुर्लक्ष करून, दिलेल्या निष्कर्षांपैकी कोणती तर्कशुद्धपणे विधानांचे अनुसरण करतात ते ठरवा.
विधाने :
सर्व चार्ब्या चटया असतात.
काही चटया उंदीर असतात.
सर्व उंदीर मांजरी असतात.
निष्कर्ष:
I. काही चार्ब्या मांजरी असतात.
II. काही चटया मांजरी असतात.
III. काही उंदीर चार्ब्या असतात.

DIRECTION: In each of the following questions, three statements followed by four conclusions marked I. II, and III are given. Consider the statements to be true, even though they seem to be at variance with the commonly known facts and find out which of the given conclusion(s) logically follow(s) the statements, disregarding the commonly known facts.

Statements:
All fats are mats.
Some mats are rats.
All rats are cats

Conclusions:
I. Some fats are cats.
II. Some mats are cats.
III. Some rats are fats.

ہدایت: مندرجہ ذیل ہر سوال میں، تین بیانات دیے گئے ہیں جن کے بعد چار نتائج دیے گئے ہیں۔ بیانات کے درست ہونے پر I اور II، III غور کریں، اگرچہ وہ عام طور پر معلوم حقائق کے برعکس نظر آتے ہوں اور تلاش کریں کہ کون سے دیے گئے نتائج منطقی طور پر بیانات کی پیروی کرتے ہیں، عام طور پر معلوم حقائق سے قطع نظر۔

بیانات:
تمام چربی چٹائیاں ہیں۔
تمام چٹائیاں چوہے ہیں۔
تمام چوہے بلیاں ہیں

حل:
I. کچھ چربی بلیاں ہیں۔
II. کچھ چٹائیاں بلیاں ہیں۔
III. کچھ چوہے چربی ہیں۔

A.केवळ निष्कर्ष I निघत असल्यास.
A.Only I follows
A.صرف I پیروی کرتا ہے

B.केवळ निष्कर्ष II निघत असल्यास.
B.Only II follows
B.صرف II پیروی کرتا ہے

C.केवळ निष्कर्ष III निघत असल्यास.
C.Only III follows
C.صرف III پیروی کرتا ہے

D.दोन्ही निष्कर्ष I आणि II निघत असल्यास.
D.Both I and II follow
D.I اور II پیروی کرتے ہیں

Answer: B.केवळ निष्कर्ष II निघत असल्यास.
B.Only II follows
B.صرف II پیروی کرتا ہے

74 निर्देश: दिलेल्या अंक मालिकेतील चुकीची संज्ञा शोधा:

48, 24, 72, 34, 108, 54

DIRECTIONS: Find the wrong term in the given number series:

48, 24, 72, 34, 108, 54

ہدایت دے گئے نمبرس سرج مے غلط نمبر کھوجے

48, 24, 72, 34, 108, 54

A.54
A.54
A.54

B.34
B.34
B.34

C.72
C.72
C.72

D.108
D.108
D.108

Answer: B.34
B.34
B.34

75 Out of the given options, choose the one which is the correct active voice of the sentence given below.
Is a letter written by you?

A.Did you wrote a letter?

B.Is a letter being written by you?

C.Are you writing the letter?

D.Do you write a letter?

Answer: D.Do you write a letter?

76 A sentence with an underlined idiomatic expression is given. What is the meaning of the idiomatic expression 'Flogging a dead horse' in the sentence given below?
He keeps trying to get it published but I think he's flogging a dead horse .

A.To waste effort on something when there is no chance of succeeding

B.To invest in a highly beneficial project

C.To maintain a stable of exotic breed of horses

D.None of the above

Answer: A.To waste effort on something when there is no chance of succeeding

77 अनुक्रमे 100 मी आणि 80 मी लांबी असलेल्या दोन ट्रेन्स रेल्वेच्या समांतर लाईन्सवर चालत आएहत. जेव्हा त्या सारख्या दिशेमध्ये धावतात तेव्हा गतिमान ट्रेन संथ ट्रेनला 18 सेकंदांमध्ये पार करते, पण जेव्हा त्या आधीसारख्या गतीने विरूध्द दिशेमध्ये धावतात, तेव्हा त्या 9 सेकंदामध्ये एकमेकींना पार करतात. गतिमान ट्रेनची गती काढा.

Two trains of length 100 m and 80 m respectively run on parallel lines of rails. When running in the same direction the faster train passed the slower one in 18 second, but when they are running in opposite directions with the same speed as earlier, they pass each other in 9 seconds. Find the speed of faster train.

بالترتیب 100 میٹر اور 80 میٹر کی لمبائی والی دو ٹرینیں ریلوں کے متوازی لائنوں پر چلتی ہیں۔ ایک ہی سمت میں چلتے ہوئے تیز ٹرین 18 سیکنڈ میں سست رفتار ٹرین سے گزر جاتی ہے، لیکن اسی رفتار سے مخالف سمت میں چلتےہوئے وہ ایک دوسرے کو 9 سیکنڈ میں کراس کرتی ہیں۔ تیز ٹرین کی رفتار معلوم کریں۔

A.15 मी/सेकंद
A.15 m/s
A.15 میٹر / سیکنڈ

B.25 मी/सेकंद
B.25 m/s
B.25 میٹر / سیکنڈ

C.20 मी/सेकंद
C.20 m/s
C.20 میٹر / سیکنڈ

D.निश्चित करता येत नाही
D.Can’t be determined
D.معلوم نہیں ہو سکتا

Answer: A.15 मी/सेकंद
A.15 m/s
A.15 میٹر / سیکنڈ

78 सूचना: अर्थपूर्ण परिच्छेद निर्माण करण्यासाठी, खाली दिलेली (P), (Q) (R), (S) आणि (T) ही पाच वाक्ये योग्य अनुक्रमाने पुनर्रचना करा; त्यांनतर खालील प्रश्नांची उत्तर द्या. P. बाळ कृष्ण मूठभर धान्य पकडले आणि दरवाजाकडे पळाला परंतु सर्व धान्य खाली सांडले.
Q. लवकरच तिला जाणवले कि तिची फळांच्या टोपली रत्न आणि सोन्याने भरलेली आहे.
R. कृष्णाला काही फळे हवी होती, त्याने त्या स्त्रीकडे फळे मागितली परंतु तिने त्याबदल्यात मोबदला मागितला.
S. ते पाहून, फळविक्रेती स्त्री श्रीकृष्णाकडे मोहित झाली आणि त्याच्या मुठीत जे काय असेल त्याबदल्यात सर्व फळे त्याला दिली.
T. एकेदिवशी फळविक्रेती स्त्री कृष्णाच्या घराजवळून निघाली होती.

पुनर्रचना केल्यानंतर खालीलपैकी कोणते वाक्य दुसरे असेल?

DIRECTION: Rearrange the following five sentences (P), (Q), (R), (S) and (T) in the proper sequence to form a meaningful paragraph; then answer the questions given below them.
P. Baby Krishna grabbed a handful of grains and ran towards the door but all the grains fell in the way.
Q. Soon she realized that her fruit basket was full of jewels and gold.
R. Krishna wanted to have some fruit, he asked the lady for fruit but the lady demanded something in return.
S. On seeing this, the fruit lady was completely smitten by Lord Krishna and gave him all the fruits in exchange for whatever was in his hands.
T. Once a lady who was selling fruits was crossing Shri Krishna's house.

Which of the following should be the SECOND sentence after rearrangement?

ہدایات: ان پانچ جملوں (P)، (Q)، (R)، (S) اور (T) کو با معنی پیرا بنانے کے لئے دوبارہ ترتیب دیجئے، پھر نیچے دے گئے سوالوں کے جواب دیجئے

P. بچہ کرشنا نے مٹھی بر اناج اٹھایا اور دروازے کی طرف باگا لیکن تمام اناج راستے میں گر گیا.
Q. جلدی اسکو احساس ہوا کی اسکی پھولوں کی ٹوکری جواہرات اور سونے سے بری ہے.
R. کرشنا کو کچھ میوہ چاہیے، اسنے عورت سے میوے کے لئے کہا لیکن عورت نے اسکے بدلے کچھ مانگا.
S. یے دیکھ کر، میوے والی عورت دیوتا کرشنا سے بہت متاثر ہوئی اور اسے سارے میوے دے دے بدلے اسکے کہ جو اسکے ہاتھ میں تھا.
T. ایک بار ایک میوہ بجھنے والی عورت شری کرشنا کے گھر سے گزری.

دوبارہ ترییب دینے کے بعد کون سا جملہ دوسرا ہونا چاہیے؟

A.R
A.R
A.R

B.P
B.P
B.P

C.T
C.T
C.T

D.S
D.S
D.S

Answer: A.R
A.R
A.R

79 सूचना: खाली दिलेल्या विधान (A) आणि कारण (R) साठी, खालील पैकी योग्य पर्याय निवडा:

विधान (A): वनस्पतिशास्त्र प्राणी संबंधित आहे.
कारण (R): प्राण्यांचा अभ्यास बॉटनी म्हणून ओळखला जातो.

DIRECTION: For the Assertion (A) and Reason (R) given below, choose the correct alternative from the following:

Assertion (A): Botany is related to animals.
Reason (R): Study of animals is known as Botany.

ہدایت: نیچے دئیے گئے اسرشن (A) اور وجہ (R) کے لئے، مندرجہ ذیل میں سے صحیح متبادل منتخب کریں:

اسرشن (A): بوٹنی جانوروں سے متعلق ہے۔
وجہ (R): جانوروں کے مطالعہ کو بوٹنی کے طور پر جانا جاتا ہے۔

A.दोन्ही (A) आणि (R) सत्य आहेत आणि (R) (A) च योग्य स्पष्टीकरण आहे
A.Both (A) and (R) are true and (R) is the correct explanation of(A)
A. (A) اور (R) دونوں صحیح ہیں اور (R) (A) کی درست وضاحت ہے

B.दोन्ही (A)आणि (R) खरे आहेत, परंतु (R) (A) च योग्य स्पष्टीकरण नाही
B.Both (A) and (R) are true, but (R) is not the correct explanation of (A)
B. (A) اور (R) دونوں صحیح ہیں، لیکن (R) (A) کی درست وضاحت نہیں ہے

C.(A) सत्य आहे, परंतु (R) खोटे आहे
C.(A) is true, but (R) is false
C. (A) صحیح ہے، لیکن (R) غلط ہے

D.दोन्ही (A) आणि (R) खोटे आहेत
D.Both (A) and (R) are false
D. (A) اور (R) دونوں غلط ہیں

Answer: D.दोन्ही (A) आणि (R) खोटे आहेत
D.Both (A) and (R) are false
D. (A) اور (R) دونوں غلط ہیں

80 आपण आपल्या वर्गामध्ये एक मॉनिटर निवडल्यास, या निवडीमध्ये आपल्याकडून कोणत्या मापदंडाचे अनुसरण केले जाईल?

If you select a monitor in your class, which criteria will be followed by you in this selection?

اگر آپ اپنی کلاس میں نگران کا انتخاب کرتے ہیں تو، آپ اس انتخاب میں کس معیار کی پیروی کریں گے؟

A.लोकशाही मूल्याच्या (निवडणूक माध्यमातून) आधारावर
A.On the basis of democratic ideals (Through election)
A.جمہوری نظریات کی بنیاد پر (انتخابات کے ذریعے)

B.विद्यार्थ्यांची शारीरिक बनावटीच्या आधारावर
B.On the basis of physical make-up
B.جسمانی ساخت کی بنیاد پر

C.वर्गामध्ये श्रेष्ठत्वाच्या आधारे
C.On the basis of superiority in the class
C.کلاس میں اہلیت کی بنیاد پر

D.वैयक्तिक प्राधान्याच्या आधारावर
D.On the basis of personal preference.
D.ذاتی ترجیح کی بنیاد پر.

Answer: A.लोकशाही मूल्याच्या (निवडणूक माध्यमातून) आधारावर
A.On the basis of democratic ideals (Through election)
A.جمہوری نظریات کی بنیاد پر (انتخابات کے ذریعے)

81 राजेशची आई ही मीनाच्या वडिलांची एकुलती मुलगी आहे. मग मीनाचा पती आणि राजेश यांचे नाते काय?

Rajesh's mother is the only daughter of Meena's father. How is Meena's husband related to Rajesh?

راجیش کی ماں مینا کے باپ کی واحد بیٹی ہے. مینا کا شوہر کا راجیش سے کیا رشتہ ہے؟

A.भाऊ
A.Brother
A.بھائی

B.काका
B.Uncle
B.چچا

C.वडील
C.Father
C.باپ

D.आजोबा
D.Grandfather
D.دادا

Answer: C.वडील
C.Father
C.باپ

82 14 आठवडे 3 दिवसांना दिवसांमध्ये रूपांतरीत करा

Convert 14 weeks 3 days into days?

ہفتے 3 دن کو دنوں میں بدلیں؟14

A.100 दिवस
A.100 Days
A. 100دن

B.99 दिवस
B.99 Days
B. 99دن

C.104 दिवस
C.104 Days
C. 104دن

D.101 दिवस
D.101 Days
D. 101دن

Answer: D.101 दिवस
D.101 Days
D. 101دن

83 Choose the word which is opposite in meaning to the given word.
BOISTEROUS

A.Peaceful

B.Noisy

C.Loud

D.Overexcited

Answer: A.Peaceful

84 जर पाण्यामधील घड्याळाची प्रतिमा 4:42 वेळ दर्शवत असेल, तर खरी वेळ काय आहे?

Water image of clock is showing time 4:42 what is the real time?

پانی میں گھڑی کی تصویر سے وقت 4:42 دکھ رہا ہے تو اصل وقت کیا ہوا ہے؟

A.1:48
A.1:48
A.1:48

B.2:48
B.2:48
B.2:48

C.12:48
C.12:48
C.12:48

D.12:42
D.12:42
D.12:42

Answer: A.1:48
A.1:48
A.1:48

85 20 पक्षांच्या रांगेत पोपट उजवीकडून सहाव्या स्थानावर आहे आणि त्याच रांगेत कबुतर डावीकडून आठव्या स्थानावर आहे. तर रांगेत त्यांच्यामध्ये किती पक्षी आहेत ?

Parrot is sixth from the right end of a row of 20 birds and Pigeon is eighth from the left end in the same row. How many birds are there between them in the row?

20 پرندوں کی کتار میں طوطا دھانیں چھور سے چھٹھا ہے اور کبوتر اسی کتار کے بھانیں چھور میں آٹھوہ ہے. کتار میں انکے درمیان کتنے پرندے ہے؟

A.3
A.3
A.3

B.5
B.5
B.5

C.6
C.6
C.6

D.यापैकी नाही
D.None of these
D.ان میں سے کوئی نہیں

Answer: C.6
C.6
C.6

86 असे म्हटले जाते की शिक्षकाने त्याच्या आदर्श वर्तनाने एक उदाहरण मांडले पाहिजे कारण

It is said that a teacher should set an example by his model behavior because—

یہ کہا جاتا ہے کہ ایک استاد کو اپنے رویے کی مدد سے ایک مثال قائم کرنا چاہئے کیونکہ—

A.विद्यार्थी त्याला उच्च आदर देतात
A.The students give him high respect
A.طالب علموں نے اسے اعلی احترام دیا ہے

B.ते मुलांचा नैतिक पाय मजबूत करतात
B.He makes solid foundation of moral values
B.وہ اخلاقی اقدار کی مضبوط بنیاد رکھتا ہے

C.अध्यात्मिक 'गुरू' सारखे ते आपले अनुयायी विकसित करतात
C.He develops his large following as a spiritual ‘Guru’.
C.وہ روحانی 'گرو' کے طور پر بڑی پیروی رکھتا ہے.

D.ते नोकरी-समाधान विकसित करतो
D.He develops job-satisfaction.
D.وہ نوکری کے اطمینان کو فروغ دیتا ہے.

Answer: B.ते मुलांचा नैतिक पाय मजबूत करतात
B.He makes solid foundation of moral values
B.وہ اخلاقی اقدار کی مضبوط بنیاد رکھتا ہے

87 ‘ घाटा ’ या शब्दाचा समानार्थी शब्द कोणता ?

A.लाभ

B.तोटा

C.नफा

D.फायदा

Answer: B.तोटा

88 यापैकी कोणती आकृती मुले, मुली आणि विद्यार्थी यांच्या दरम्यानचे सर्वोत्तम नाते दर्शवते?

Which of the following diagrams indicates the best relation between Boys, Girls and Students ?

ذیل میں سے کونسی تصویر لڑکوں،لڑکیوں اور طلباء کے درمیان بہترین تعلقات کی نشاندہی کرتی ہے؟

(A) 

(B) 

(C) 

(D) 

Answer: (D) 

89 Out of the given four words only one is spelt correctly. Find the word that is correctly spelt.

A.Cemetery

B.Existance

C.Forseeable

D.Ecstaycy

Answer: A.Cemetery

90 सूचना: खालील प्रश्नांमध्ये दिलेल्या पर्यायांमधून संबंधित अक्षर/शब्द/संख्या निवडा.

लेखक: पुस्तक: : ?

DIRECTIONS: In the following question, select the related letter/word/number from the given alternatives.

Writer: Book : : ?

سمت: مندرجہ ذیل سوال میں، دیے گئے متبادل سے متعلقہ حرف/لفظ/نمبر منتخب کریں۔

مصنف: کتاب: : ؟

A.गवंडी : शिल्पकार
A.Mason : Architect
A.مستری : معمار

B.कविता : कथा
B.Poem : Story
B.نظم : کہانی

C.चेअर : फर्निचर
C.Chair : Furniture
C.کرسی : فرنیچر

D.रचनाकार : गीत
D.Composer : Song
D.موسیقار : گیت

Answer: D.रचनाकार : गीत
D.Composer : Song
D.موسیقار : گیت

91 पौगंडावस्था (Adolescence) हा शब्द या लॅटीन शब्दावरून आला आहे

Adolescence comes from a Latin word)

ایڈولسن لفظ لاطینی لفظ سے آیا ہے

A.adolescere
A.adolescere
A.adolescere

B.adoles
B.adoles
B.adoles

C.adoloscere
C.adoloscere
C.adoloscere

D.वरीलपैकी कोणतेही नाही
D.none of the above
D.درج بالا میں سے کوئی نہیں

Answer: A.adolescere
A.adolescere
A.adolescere

92 मजकूर ओळीच्या सुरवातीला जाण्यासाठी दाबा-

To go to the beginning of a text line press—

ایک تحریری لائن کی شروعات میں جانے کے لئے _____ دبائیں۔

A.होम
A.Home
A.ہوم

B.पेज अप
B. Page up
B.پیج اپ

C.एन्टर
C. Enter
C.انٹر

D.यापैकी एकही नाही
D. None of these
D.ان میں سے کوئی بھی نہیں

Answer: A.होम
A.Home
A.ہوم

93 सूचना: दिलेल्या पर्यायांमधून वेगळे ते बाहेर काढा.

DIRECTIONS: Find the odd one out from the given alternatives.

سمت: دیے گئے متبادل میں سے بے جوڑ کو تلاش کرو۔

	A.शिल्पकला A.Sculpture A.مجسمہ
	B.लोहार B.Blacksmith B.لوہار
	C.सुतार C.Carpenter C.بڑھئی
	D.शिल्पकार D.Architect D.معمار
Answer:	D.शिल्पकार D.Architect D.معمار

94 सूचना : खालील दिलेल्या प्रश्नामध्ये काही विधाने आणि काही निष्कर्ष आहेत. सामन्यात: ज्ञात तथ्यांपेक्षा ते वेगळे असतील तर दिलेली विधाने तुम्हाला सत्य मानवी लागतील आणि त्यानंतर दिलेल्या विधानाचे अनुकरण दिलेल्यापैकी कोणता निष्कर्ष तार्किकदृष्ट्या करतो ते ठरवा.

विधाने:
S ≤ L ≤ I = P ≥ E > R

निष्कर्ष:
I. L>R
II. P >R

DIRECTIONS: In the question given below, there are few statements followed by few conclusions. You have to take the given statements to be true even if they seem to be at variance with commonly known facts and then decide which of the given conclusion logically follow(s) from the given statements.

Statements:
S ≤ L ≤ I = P ≥ E > R
Conclusions:
I. L > R
II. P > R

ہدایات: مندرجہ ذیل سوال میں، کچھ بیانات کے بعد کچھ نتائج موجود ہیں. اگر آپ کو عام طور پر جانے جاتے حقائق کے ساتھ بھی متغیر ہونے لگے تو بھی آپ دئے گئے بیانات دماغ میں رکھیں اور پھر اس بات کا فیصلہ کریں کہ ذیل میں دیا گیا کونسا نتیجہ منطقانہ طور پر دیے گئے بیانات کی پیروی کرتا ہے.

بیانات:
S ≤ L ≤ I = P ≥ E > R
نتائج:
L>R .I
P >R .II

A. फक्त II निष्कर्ष खरा आहे
A.Only conclusion II is true
A.صرف نتیجہ II درست ہے

B. फक्त I निष्कर्ष खरा आहे
B.Only conclusion I is true
B.صرف نتیجہ I درست ہے

C.I किंवा II यापैकी एक निष्कर्ष खरा आहे.
C.Either conclusion I or II is true
C.یا I یا II نتیجہ درست ہے

D. I व II हे दोन्हीही निष्कर्ष खरे नाहीत.
D.Neither conclusion I nor II is true
D.نہ ہی I نہ ہی II نتیجہ درست ہے

Answer: A. फक्त II निष्कर्ष खरा आहे
A.Only conclusion II is true
A.صرف نتیجہ II درست ہے

95 सूचना: हे प्रश्न खालील माहितीवर आधारित आहेत.
पाच मुले - A, B, C, D आणि E हे रांग - I मध्ये उत्तर दिशेकडे तोंड करून बसलेली आहेत, आणि पाच मुली - P, Q, R, S आणि T - रांग - II मध्ये दक्षिण दिशेकडे तोंड करून बसलेल्या आहेत, ते त्याच क्रमाने असतील असे नाही. रांग - I मधील प्रत्येक मुलगा रांग - II च्या बरोबर एका मुली सामोर आहे. त्यांच्याबद्दल खालील माहिती दिलेली आहे.
A आणि त्या मुलाच्या दरम्यान फक्त दोन लोक बसतात जो Q च्या सामोर आहे, आही जो कोणत्याही शेवटाला बसलेला नाही. C हा B च्या तत्काळ डाव्या बाजूला आहे, परंतु ते दोघे E च्या समीप नाहीत. P त्या मुलाच्या समोर आहे जो D च्या तत्काळ उजवीकडे आहे. D हा Q च्या समोर बसलेला नाही. R त्या मुलीच्या डाव्या बाजूस आहे जी D च्या सामोर आहे. C हा D च्या सामोर नाही.
R च्या उजवीकडून दुसरा कोण बसतो?

DIRECTIONS: These questions are based on the following information.
Five boys – A, B, C, D and E – are sitting in row-I, facing North, and five girls – P, Q, R, S and T – are sitting in row-II facing South, not necessarily in the same order. Each boy in row - I is facing exactly one girl from row -II. The following information is known about them.
Only two persons sit between A and the boy who faces Q, who does not sit at any end. C is to the immediate left of B, but both of them are not adjacent to E. P is opposite the boy who is to the immediate right of D. D does not sit opposite Q. R is to the left of the girl who faces D. C does not face S.
Who sits second to the right of R?

ہدایات: یہ سوالات مندرجہ ذیل معلومات پر مبنی ہیں۔
A اور Q کے درمیان صرف دو لوگ بیٹھے ہیں، جو کسی بھی سرے پر نہیں بیٹھا ہے۔ Q کا سامنا کرنے والے لڑکے C، B کے فوری دائیں طرف ہے۔ D اس لڑکے کے بالمقابل ہے جو P کے بغل میں نہیں ہیں۔ E بائیں طرف ہے، لیکن وہ دونوں D، Q کے سامنے نہیں ہے۔ C، S کا سامنا کرنے والی لڑکی کے بائیں طرف بیٹھی ہے۔ R، D مقابل نہیں بیٹھا ہے۔
R کے دائیں سے دوسری جگہ کون بیٹھا ہے؟

A.P
A.P
A.P

B.Q
B.Q
B.Q

C.S
C.S
C.S

D.T
D.T
D.T

Answer: C.S
C.S
C.S

96 कोणते हि दोन विद्यार्थी एकसारखे नसतात ह्या लोकप्रिय म्हणी चा अर्थ आहे

It is popularly said that any two students are not alike. The meaning of this phrase is-

یہ عام طور پر کہا گیا ہے کہ کوئی دو طالب علم ایک جیسے نہیں ہیں.اس قول کا مطلب یہ ہے-

A.विद्यार्थ्यांची शारीरिक बनावट भिन्न आहे
A.The students differ in their physical make-up
A.طالب علموں کی جسمانی ساخت میں فرق ہے

B.विद्यार्थ्यांची मानसिकता भिन्न आहे
B.The students differ in their mental make-up
B.طالب علموں کی ذہنی حالت میں فرق ہے

C.विद्यार्थ्यांची कौटुंबिक आणि सामाजिक स्थितीत भिन्न आहे
C.The students differ in their familial and social status
C.طالب علم اپنے خاندانی اور سماجی حیثیت میں مختلف ہیں

D.वरील सर्व विधाने बरोबर आहेत
D.All the above statements are correct.
D.تمام اوپر بیانات درست ہیں.

Answer: D.वरील सर्व विधाने बरोबर आहेत
D.All the above statements are correct.
D.تمام اوپر بیانات درست ہیں.

97 सूचना: प्रत्येक प्रश्नाला एक प्रमुख विधानासोबत चार विधाने आहेत ज्यांच्याखाली A, B, C आणि D असे चार विधान आहेत. क्रमवार विधानांची जोडी निवडा ज्यामध्ये प्रथम विधान दुसऱ्या विधानाला सुचवते, आणि दोन्ही विधाने तर्किकदृष्ट्या प्रमुख विधानासोबत निगडित असेल.

जर मी टीव्ही बघितला, तर मी जेवत नाही.
A. मी टीव्ही बघितला
B. मी टीव्ही बघितला नाही
C. मी जेवत नाही.
D. मी जेवलो नाही.

DIRECTIONS: Each question has a main statement followed by four statements labelled A, B, C and D. Choose the ordered pair of statements, where the first statement implies the second, and the two statements are logically consistent with the main statement.

If I watch TV , I don't have food.
A. I watched TV
B. I did not watch TV
C. I don't have food.
D. I did not have food.

ہدایت: ہر سوال میں ایک جملہ ہے جسکے بعد چار جملےاے، بی،سی اور ڈی کے نام سے دئے گئے ہیں اسمیں منسلک جوڑیوں کو چنئے۔ جہاں پہلا جملہ دوسرے جملہ کی اور اشارہ کر رہا ہے اور دو جملے منطقی مرکزی بیان کے مطابق ہیں

میں ٹی وی دیکھتا ہوں تو میرے پاس کھانا نہیں ہوتا۔
A۔ میں نے ٹی وی دیکھا
B۔ میں نے ٹی وی نہیں دیکھا
C۔ میرے پاس کھانا نہیں ہوتا
D۔ میرے پاس کھانا نہیں تھا

A.AC
A.AC
A.AC

B.BC
B.BC
B.BC

C.DA
C.DA
C.DA

D.CD
D.CD
D.CD

Answer: A.AC
A.AC
A.AC

98

सूचना: दिलेल्या पर्यायांमधून श्रेणी पूर्ण करणारी योग्य आकृती निवडा.

DIRECTIONS: Complete the series by choosing right figure from the given choices.

ہدایات: دیئے گئے اختیارات میں سے صحیح شکل کو چن کر سلسلہ کو مکمل کیجیئے

Problem Figures

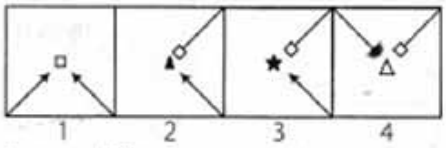

Answer Figures

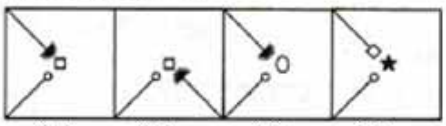

A. (A)

B. (B)

C. (C)

D. (D)

Answer: A. (A)

99

सूचना: खालील प्रश्नात कागदाच्या एक तुकड्याला प्रश्नातील आकृतीत दाखविल्याप्रमाणे घडी घातली आहे. उत्तरादाखल पर्यायांमधून अशी आकृती निवडा जी भोक पडल्यानंतर उलगडलेल्या कागदाचे स्वरूप दाखवेल.

DIRECTIONS: In the following question a piece of paper is folded in the manner shown in the question figure(s). Select the figure out of the answer choices showing the unfolded pattern after the punches (cut).

ہدایات: نیچے دیئے گئے سوالوں میں کاغذ کا ایک ٹکڑا اس طرح جوڑا گیا ہے جیسے سوال کی شکل میں بتایا گیا ہے، دیئے گئے جوابات کے اختیارات میں سے اس طرح انتخاب کیجیئے کہ کٹ لگانے کے بعد بغیر جوڑا ہوا پیٹرن دکھائی دے۔

Question Figures

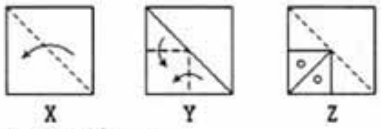

Answer Figures

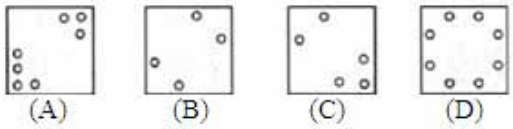

A. (A)

B. (B)

C. (C)

D. (D)

Answer: D. (D)

100

‘ए ट्रेन टु पाकिस्तान’ या पुस्तकाचे लेखक कोण आहेत?

Who is the author of the book ‘A Train to Pakistan’?

اے ٹرین تو پاکستان کے مصنف ہیں۔

A.खुशवंत सिंह
A.Khushwant Singh
A.خوشونت سنگھ

B.रघुराम राजन
B.Raghuram Rajan
B.رگھو رام راجن

C.विक्रम सेठ
C.Vikram Seth
C.وکرم سیٹھ

For More Info And Videos About TAIT-Exam Syllabus And Other Exam Visit My Channel
TAIT च्या 30 प्रश्नपत्रिका PDF
BADSHAHimp Available Request 9765226781
WWW.YouTube.com/BADSHAHimp
Subscribe My Channel

D.चेतन भगत
D.Chetan Bhagat
D.چیتن بھگت

Answer: A.खुशवंत सिंह
A.Khushwant Singh
A.خوشونت سنگھ

101 सूचना: दिलेल्या पर्यायांमधून वेगळे ते बाहेर काढा.

DIRECTIONS: Find the odd one out from the given alternatives.

سمت: دیے گئے متبادل میں سے بے جوڑ کو تلاش کرو۔

A.13
A.13
A.13

B.17
B.17
B.17

C.21
C.21
C.21

D.23
D.23
D.23

Answer: C.21
C.21
C.21

102 एका घनाला रंगवून 216 लहान आणि समान घनांमध्ये कापले गेले आहे.
तंतोतंतपणे रंगवलेले तीन चेहरे असलेले किती लहान घन आहेत?

A cube is painted and cut into 216 smaller and identical cubes by making the minimum possible number of cuts.
How many smaller cubes have exactly three painted faces?

ایک کیوب پینٹ کرکے کاٹا جائے اور اس کے 216 چھوٹے ایک جیسے ٹکڑے کرکے کیوبس بنائیں جائیں تو کتنے چھوٹے کیوبس حتمی طور پر ہوں گے جن کے تین منہ پینٹ کئے ہوئے ہوں؟

For More Info And Videos About TAIT-Exam Syllabus And Other Exam Visit My Channel
TAIT च्या 30 प्रश्नपत्रिका PDF
BADSHAHimp Available Request 9765226781
WWW.YouTube.com/BADSHAHimp
Subscribe My Channel

A.6
A.6
A.6

B.8
B.8
B.8

C.10
C.10
C.10

D.12
D.12
D.12

Answer: B.8
B.8
B.8

103 समजा एक शिक्षकाची उंची कमी आहे, जे त्याचा योग्य पद्धतीने ब्लॅक-बोर्ड वापरण्यात अडथळा निर्माण करते त्यामुळे विद्यार्थी शिक्षकानी अत्यंत चांगल्याला प्रमाणे दिलेले धडे घेत नाही, अशा परिस्थितीत आपण त्याला काय सुचविण्यास इच्छुक असणार ?

Suppose a teacher has short height. It creates an obstacle in utilizing the black-board in a justifiable manner. Therefore, the students can not follow the lessons in spite of utmost care taken by the teacher. In such a condition what would you like to suggest him?

فرض کریں کہ ایک استاد کا قد چھوٹا ہے.یہ صحیح طریقے سے تختہ سیاہ کے استعمال میں رکاوٹ پیدا کرتا ہے.لہذا، طالب علم استاد کی طرف سے کی جانے والی انتہائی دیکھ بھال کے باوجود سبق کے ساتھ نہیں چل سکتے.ایسی حالت میں آپ اس کو کیا مشورہ دیتے ہیں؟

A.चांगले आहे आपण आपल्या श्रमाचे आणि कपड्याचे धूळ कणा पासून जतन करू शकता
A.Good at least you can save your labor and clothes from dust particles
A.کم سے کم بہتر ہے کہ آپ اپنی محنت اور کپڑے دھول کے ذرات سے بچا سکتے ہیں

B.विद्यार्थ्यांच्या मदतीने विटा ठेऊन तात्पुरते व्यासपीठ बनवण्याचा सल्ला देणार
B.You suggest him to make a temporary platform of bricks with the help of students
B.آپ انہیں طالب علموں کی مدد سے اینٹوں کا عارضی پلیٹ فارم بنانے کا مشورہ دیتے ہیں

C.आपण त्याला प्राचार्या कडे तक्रार करण्यास सल्ला देणार
C.You suggest him to make a complaint with the principal
C.آپ اسے پرنسپل کو شکایت کرنے کا مشورہ دیتے ہیں

D.फळा पुनर्रचना साठी त्यांच्या विद्यार्थ्याकडून देणग्या गोळा करण्याचा सल्ला देणार
D.Collect donations from his student to reconstruct the black-board.
D.بلیک بورڈ کو دوبارہ تعمیر کرنے کے لئے اپنے طالب علم سے عطیہ جمع کریں گے.

Answer: B.विद्यार्थ्यांच्या मदतीने विटा ठेऊन तात्पुरते व्यासपीठ बनवण्याचा सल्ला देणार
B.You suggest him to make a temporary platform of bricks with the help of students
B.آپ انہیں طالب علموں کی مدد سے اینٹوں کا عارضی پلیٹ فارم بنانے کا مشورہ دیتے ہیں

104 सूचना: खालील प्रश्नांमध्ये दिलेल्या पर्यायांमधून संबंधित अक्षर समूह निवडा.

BACE : DACE :: FACE : _____.

DIRECTIONS: In the following question, select the related group of letters from the given alternatives.

BACE : DACE :: FACE : _____.

سمت: مندرجہ ذیل سوال میں، دیے گئے متبادل میں سے حروف کا متعلقہ گروپ منتخب کریں۔

BACE : DACE :: FACE : _____.

A.HASE
A.HASE
A.HASE

B.LACE
B.LACE
B.LACE

C.CASE
C.CASE
C.CASE

D.HACE
D.HACE
D.HACE

Answer: D.HACE
D.HACE
D.HACE

105 खालीलपैकी सर्वांत लहान अपूर्णांक शोधा

Find the smallest of the following fractions

مندرجہ ذیل کسور میں سے سب سے چھوٹی کسر تلاش کریں

A.47/137
A.47/137
A.47/137

B.15/49
B.15/49
B.15/49

C.8/25
C.8/25
C.8/25

D.26/73
D.26/73
D.26/73

Answer: B.15/49
B.15/49
B.15/49

106 नैसर्गिक आपत्ती ज्यामध्ये कार्बन डाय ऑक्साइडचा खोल सरोवरापासून अचानक विस्फोट होतो त्याला म्हणतात....

The natural disaster in which carbon-di-oxide suddenly erupts from deep lake water is known as....

قدرتی تباہی جسمیں کاربن ڈائی آکسائڈ گہرے پانی کے تالاب میں سے ایکدم نکلتی ہے

A.लिम्नीक
A.Limnic
A.لیمیک

B.लकास्ट्राईन
B.Lacustrine
B.لیکسٹرائن

C.फ्लवियल
C.Fluvial
C.فلووائل

D.हिमयुगीय
D.Glacial
D.گلیشئل

Answer: A.लिम्नीक
A.Limnic
A.لیمیک

107 जर तुम्हाला सामान्य विद्यार्थ्यांबरोबर अंध विद्यार्थ्याला शिकविण्याची संधी मिळेल तर तुम्ही त्याला कोणत्या प्रकारे वागणूक देऊ इच्छिता?

If you get an opportunity to teach a blind student along with normal students, what type of treatment would you like to give him in the class ?

اگر آپ کو اندھے طالب علموں کے ساتھ ساتھ عام طالب علموں کو سکھانے کا موقع ملتا ہے، تو آپ اس کلاس میں کس قسم کا معاملہ کرنا چاہتے ہیں؟

A.वर्गात सहानुभूतीपूर्वक त्याची काळजी घ्याल
A.Take care of him sympathetically in the class-room
A.کلاس روم میں ان کی ہمدردی کا خیال رکھیں

B.पुढील पंक्तीतील आसन व्यवस्था करणार आणि त्याच्या शिकण्याचा गतिनुसार त्याचा शिक्षण घेण्याचा प्रयत्न कराल
B.Arranging a seat in the front row and try to keep teaching pace according to him
B.سامنے کی قطار میں ایک سیٹ کا اہتمام کرنا اور اس کے مطابق رفتار کو برقرار رکھنے کی کوشش کریں

C.त्याचा मुळे बहुतेक मुलांचे नुकसान होत असल्यामुळे जास्त लक्ष देणार नाही
C.Not giving extra attention because majority suffers otherwise
C.اضافی توجہ نہیں دیتے کیونکہ اس صورت میں اکثریت کو برداشت کرنا پڑتا ہے

D.आपण असे विचार करणार की अंधत्व त्याच्या पापांचे परिणाम आहेत, आणि देवाच्या इच्छेविरुद्ध आपण काय करू शकतो?
D.You think that blindness is the result of his sins, so what can you do against God's will.
D.آپ سوچتے ہیں کہ اندھا پن ان کے گناہوں کا نتیجہ ہے، لہذا آپ خدا کی مرضی کے خلاف کیا کر سکتے ہیں.

Answer: B.पुढील पंक्तीतील आसन व्यवस्था करणार आणि त्याच्या शिकण्याचा गतिनुसार त्याचा शिक्षण घेण्याचा प्रयत्न कराल
B.Arranging a seat in the front row and try to keep teaching pace according to him
B.سامنے کی قطار میں ایک سیٹ کا اہتمام کرنا اور اس کے مطابق رفتار کو برقرار رکھنے کی کوشش کریں

108 अन्न साखळीमध्ये सर्वप्रथम कोण येतात?

Who comes first in the food chain?

کھانے کی سیریزمیں پہلے کون ہوتا ہے۔

A.उत्पादक
A.Producers
A.بنانے والے

B.प्राथमिक ग्राहक
B.Primary consumer
B.پرائمری کنزیومر

C.विघटनकारी
C.Decomposers
C.گلانے والے

	D.अपमार्जक D.Scavengers D.سڑا ہوا کھانا کھانے والے
Answer:	A.उत्पादक A.Producers A.بنانے والے
109	DIRECTIONS: A sentence with an underlined phrasal verb is given below. Out of the four options, choose the one which can be substituted for the given phrasal Verb. The government must hold down prices.
	A.soar
	B.increase
	C.inflate
	D.control
Answer:	D.control
110	गोलकोंडा किल्ला _____मध्ये आहे The Golconda Fort is in – گولکنڈ ہ کا قلعہ ہے۔
	A.बेंगलुरू A.Bengaluru A.بنگلورو میں
	B.सिकंदराबाद B.Secunderabad B.سکندرآباد میں
	C.हैदराबाद C.Hyderabad C.حیدرآباد میں
	D.अहमदनगर D.Ahmednagar D.احمدنگر میں

Answer:	C.हैदराबाद C.Hyderabad C.حیدرآباد میں

111	सुंदरबनच्या जंगलाला म्हणतात - The Forest of Sundarban is called as- سندربن کے جنگلوں کو جانا جاتا ہے
	A.थॉर्न अभयारण्य A.Thorn forest A. تھارن جنگل
	B.मॉनग्रोव्ह अभयारण्य B.Mangrove forest B.مینگرو جنگل
	C.डेसिड्युअस अभरयारण्य C.Deciduous forest C.ڈیسیڈئس جنگل
	D.टुंड्रा D.Tundra D. ٹنڈرا

Answer:	B.मॉनग्रोव्ह अभयारण्य B.Mangrove forest B.مینگرو جنگل

112 सूचना: प्रत्येक प्रश्नाला एक प्रमुख विधानासोबत चार विधाने आहेत ज्यांच्याखाली A, B, C आणि D असे चार विधान आहेत. क्रमवार विधानांची जोडी निवडा ज्यामध्ये प्रथम विधान दुसऱ्या विधानाला सुचवते, आणि दोन्ही विधाने तर्किकदृष्ट्या प्रमुख विधानासोबत निगडित असेल.

ती कार्यालयात बसने किंवा रेल्वेने जाते
A. ती कार्यालयात रेल्वेने जात नाही.
B. ती कार्यालयात रेल्वेने जाते.
C. ती कार्यालयात बसने जात नाही.
D. ती कार्यालयात बसने जाते.

DIRECTIONS: Each question has a main statement followed by four statements labelled A, B, C and D. Choose the ordered pair of statements, where the first statement implies the second, and the two statements are logically consistent with the main statement.

She goes to office either by bus or by train
A. She does not go to office by train
B. She goes to office by train
C. She does not go to office by bus
D. She goes to office by bus

ہدایت: ہر سوال میں ایک جملہ ہے جسکے بعد چار جملےاے، بی،سی اور ڈی کے نام سے دئے گئے ہیں اسمیں منسلک جوڑیوں کو چنئے۔ جہاں پہلا جملہ دوسرے جملہ کی اور اشارہ کر رہا ہے اور دو جملے منطقی مرکزی بیان کے مطابق ہیں

وہ یا تو بس میں دفتر جاتی ہے یا ٹرین میں
A۔ وہ ٹرین میں دفتر نہیں جاتی
B۔ وہ ٹرین میں دفتر جاتی ہے
C۔ وہ بس میں دفتر نہیں جاتی
D۔ وہ بس میں دفتر جاتی ہے

A.AC
A.AC
A.AC

B.DA
B.DA
B.DA

C.CB
C.CB
C.CB

D.AB
D.AB
D.AB

Answer: B.DA
B.DA
B.DA

113 सूचना: खाली दिलेल्या प्रश्नात एक विधान आहे ज्याचे I आणि II असे दोन निष्कर्ष त्याखाली अंकित केलेले आहेत. या आधारे सर्वात योग्य पर्याय निवडा.

विधान:
निवडुंगाच्या बहुतेक वनस्पतींमध्ये पानांची कमतरता असते आणि अशा प्रकारे ते कमी पाण्यात जगू शकतात.

निष्कर्ष:
I. निवडुंग हे वाळवंटी प्रदेशात उपयुक्त आहेत.
II. निवडुंग हे वाळवंटी प्रदेशात उपयुक्त नाहीत.

DIRECTIONS: The question below has a statement followed by two conclusions numbered I and II. Based on this choose the option that is most suitable.

Statement:
Most of the cactus plants lack leaves and as such they can survive with little water.

Conclusions:
I. Cactus are suited for desert environment.
II. Cactus are not suited for desert environment.

ہدایات: نیچے دیے گئے سوال میں ایک بیان کے بعد دو نتائج I اور II دیے گئے ہیں۔ اس کی بنیاد پرانتہائی موزوں آپشن کا انتخاب کیجیے۔

بیان:
زیادہ تر کیکٹس پودوں میں پتیوں کی کمی ہوتی ہے اور اس طرح وہ کم پانی پر گذاراہ کر سکتے ہیں.

نتیجے:
I. کیکٹس صحرائی ماحول کے لئے موزوں ہیں.
II. کیکٹس صحرائی ماحول کے لئے موزوں نہیں ہیں.

A.केवळ निष्कर्ष क्रमांक I विधानास अनुसरून आहे
A.Only Conclusion I follows
A.صرف نتیجہ I لاگو ہو گا۔

B.केवळ निष्कर्ष क्रमांक II विधानास अनुसरून आहे
B.Only Conclusions II follows
B.صرف نتیجہ II لاگو ہو گا۔

C.निष्कर्ष क्रमांक I किंवा II अनुसरून आहे
C.Either I or II follows
C. I یا II میں سے ایک لاگو ہو گا۔

D.कोणताही निष्कर्ष अनुसरून नाही
D.Neither I nor II follow
D. I اور II میں سے کوئی بھی لاگو نہیں ہو گا۔

Answer: A.केवळ निष्कर्ष क्रमांक I विधानास अनुसरून आहे
A.Only Conclusion I follows
A.صرف نتیجہ I لاگو ہو گا۔

114 सूचना: खालील प्रश्नांमध्ये दिलेल्या पर्यायांमधून संबंधित अक्षर/शब्द/संख्या निवडा.

11 : 38 :: 13 : ?

DIRECTIONS: In the following question, select the related letter/word/number from the given alternatives.

11 : 38 :: 13 : ?

سمت: مندرجہ ذیل سوال میں، دیے گئے متبادل سے متعلقہ حرف/لفظ/نمبر منتخب کریں۔

11 : 38 :: 13 : ?

A.47
A.47
A.47

B.44
B.44
B.44

C.43
C.43
C.43

D.46
D.46
D.46

Answer: B.44
B.44
B.44

115 समजा तुमच्या वर्गाचा बुद्धिमान मुलगा आपल्याकडून एका विशिष्ट पुस्तकासाठी विनंती करतो. या प्रकरणात तुम्ही कोणता निर्णय घ्याल?

Suppose an intelligent boy of your class requests for a particular book from you. What decision will you take in this case?

فرض کریں کہ آپ کی کلاس کا ایک ذہین لڑکا آپ سے مخصوص کتاب کے لئے درخواست کرتا ہے.اس کیس میں آپ کا کیا فیصلہ ہوگا؟

A.पुस्तक तुमच्या कडे नाही असे खोटं सांगणे
A.Telling-a-lie that the book is not with you
A.یہ بتاتے ہیں کہ کتاب آپ کے پاس نہیں ہے

B.त्याला पुस्तक देणे अन्य विद्यार्थ्यांचे त्या पुस्तकावर हक्क कमी करण्या समान आहे असा तर्क देणे
B.Giving a rationale that to help him is equal to curtail other students' rights on the same book
B.-یہ دلیل دینا کہ اس کی مدد کرنا اس کتاب کے معاملے میں دوسرے طلباء کے حق تلفی کے مترادف ہے

C.काही कालावधीसाठी विद्यार्थ्याला ते पुस्तक देणे
C.Giving the book without any hitch for certain duration
C.مخصوص مدت کے لئے اسے بلا جھجک کتاب دینا

D.त्याला स्वत: साठी पुस्तक खरेदी करण्यास सूचना करणे
D.Suggest him to purchase it for himself.
D.اسے خود سے خریدنے کی تجویز دیں.

Answer: C.काही कालावधीसाठी विद्यार्थ्याला ते पुस्तक देणे
C.Giving the book without any hitch for certain duration
C.مخصوص مدت کے لئے اسے بلا جھجک کتاب دینا

116 निर्देश: खालील प्रश्नामध्ये प्रश्न चिन्हाच्या (?) जागी काय येईल?
$98 \div 14 \times 49 - 294 = (?)^2$

DIRECTIONS: What will come in place of the question mark (?) in the following question?
$98 \div 14 \times 49 - 294 = (?)^2$

ہدایت: نیچے دئے ہوئے سوالات میں سوالیہ نشان (؟) کی جگہ کیا آئیگا
$98 \div 14 \times 49 - 294 = (?)^2$

A.14
A.14
A.14

B.8
B.8
B.8

C.±7
C.±7
C.±7

D.196
D.196
D.196

Answer: C.±7
C.±7
C.±7

117 खालील दिलेल्या पर्यायातून गहाळ अंक शोधा.
Find out missing number from the following given options.
نیچے کے اختیارات سے کوئی نمبر کا جواب کھوجے.

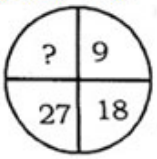

A. 40

B. 36

C. 39

D. 44

Answer: B. 36

118 कुणाचाही आधार नसलेला -

A.आधारहीन

B.निराधार

C.आधारवड

D.यापैकी सर्व

Answer: B.निराधार

119 गुंतागुंतीची नाती समजुन घेणे, आकस्मिक कारण आणि समस्या सोडवण्याच्या क्षमतेला म्हणतात:

Ability to perceive complex relationships, reason abstractly and solve problems can be called:

پیچیدہ رشتوں کو سمجھنے ، مجرد طور پر استد لال کرنے اور مسائل حل کرنے کی صلاحیت کو کہا جا سکتا ہے:

A.अस्थिर बुद्धिमत्ता
A.Fluid intelligence
A.سیال ذہانت

B.वैयक्तिक चाचणी
B.Individual test
B.انفرادی ٹسٹ

C.बौद्धिक प्रतिभा
C.Intellectual giftedness
C.خداداد ذہانت

D.मानसिक वय
D.Mental age
D. دماغی عمر

Answer: A.अस्थिर बुद्धिमत्ता
A.Fluid intelligence
A.سیال ذہانت

120 सूचना : खालील प्रत्येक प्रश्नात दोन विधाने I आणि II दिलेले आहेत. हे विधान एकतर स्वतंत्र कारण असू शकतात किंवा स्वतंत्र कारणांचे परिणाम असू शकतात. यांपैकी एक विधान इतर विधानाचा परिणाम असू शकतो. दोन्ही विधाने वाचा आणि खालीलपैकी कोणत्या उत्तराचा पर्याय या दोन्ही विधानांमधील संबंधांचे वर्णन करतो ते ठरवा.

विधान :
I. खाजगी शैक्षणिक संस्थांमार्फत आकारले जाणारे शुल्क वाढत आहे.
II. शासकीय शैक्षणिक संस्थांमध्ये नावनोंदणी वाढत आहे.

DIRECTIONS: Below in each question are given two statements I and II. These statements may be either independent causes or may be effects of independent causes. One of these statements may be the effect of the other statement. Read both the statements and decide which of the following answer choice correctly depicts the relationship between these two statements.

Statements:
I. The fee charged by private educational institutions is increasing.
II. The enrolment in government educational institutions is increasing.

ہدایات: نیچے ہر سوال میں دو بیانات I اور II آزاد وجوہات یا پھر آزاد وجوہات کے اثرات ہو سکتے ہیں۔ انہیں گئے ہیں۔ یہ بیانات یا تو آ بیانات میں سے ایک بیان دوسرے کا اثر ہو سکتا ہے۔دونوں بیانات پڑھیں اور فیصلہ کریں کہ نیچے دیے گئے کس جواب کا انتخاب ان دونوں بیانات کے در میان تعلق کو ٹھیک سے ظاہر کرتا ہے۔

بیانات:
I – پرائیویٹ تعلیمی اداروں کی فیس میں اضافہ ہو رہا ہے۔
II - سرکاری تعلیمی اداروں میں داخلوں میں اضافہ ہو رہا ہے۔

A.विधान I कारण आहे आणि विधान II त्याचा परिणाम आहे;
A.Statement I is the cause and statement II is its effect;
A.بیان نمبر I وجہ ہے اور بیان نمبر II اس کا اثر ہے۔

B.विधान II कारण आहे आणि विधान I त्याचा परिणाम आहे;
B.Statement II is the cause and statement I is its effect;
B.بیان نمبر II وجہ ہے اور بیان نمبر I اس کا اثر ہے۔

C.विधान I आणि II दोन्ही स्वतंत्र कारणे आहेत;
C.Both the statements I and II are independent causes;
C.دونوں بیانات نمبر I اور نمبر II آزاد وجوہات ہیں۔

D.विधान I आणि II दोन्ही स्वतंत्र कारणांचे परिणाम आहेत;
D.Both the statements I and II are effects of independent causes;
D.دونوں بیانات نمبر I اور نمبر II آزاد وجوہات کے اثرات ہیں۔

Answer: A.विधान I कारण आहे आणि विधान II त्याचा परिणाम आहे;
A.Statement I is the cause and statement II is its effect;
A.بیان نمبر I وجہ ہے اور بیان نمبر II اس کا اثر ہے۔

121

सूचना: खालील प्रश्नात दिलेल्या पर्यायांमधून नातेसंबंध असणारी आकृती शोधून काढा.

DIRECTIONS: In the question below, select the related figure from the given alternatives.

ہدایات: نیچے دیئے گئے سوال میں، دیئے گئے متبادلات میں سے متعلق متبادل چنئے۔

Question Figures :

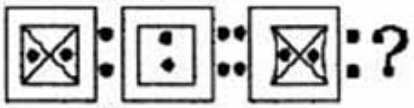

Answer Figures :

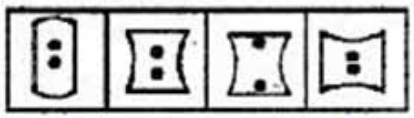

(1) (2) (3) (4)

A. 1

B. 2

C. 3

D. 4

Answer: C. 3

122

_____भक्कम प्रतिक्रियांसाठी तत्परतेने आढळते

_____occurs readily for strong responses

ٹھوس جواب(رسپونس) کے لیے _____ بڑی آسانی سے قائم ہوتی ہے ۔

A.सामाजिक सुलभीकरण
A.Social facilitation
A.سماجی معاونت

B.सामाजिक आदर
B.Social respect
B. سماجی احترام

C.अनुकुलनियता
C.Adaptability
C.اہلیت

D.यापैकी एकही नाही
D.None of these
D. ان میں سے کوئی نہیں

Answer: A.सामाजिक सुलभीकरण
A.Social facilitation
A.سماجی معاونت

123 खालील आकृतीमध्ये किती आयत आहेत?

How many rectangles are there in the figure given below?

نیچے دی گئے شکل میں کتنے مثلث ہیں؟

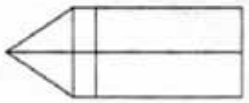

A. 7

B. 8

C. 9

D. 12

Answer: C. 9

124 प्रश्नासाठी सूचना: खालील मालिका पूर्ण करा.

KPD, LOE, MNF, NMG, _____

DIRECTION: Complete the following series.

KPD, LOE, MNF, NMG, _____

سوال کے لیے ہدایت:مندرجہ ذیل سیریز کو مکمل کریں۔

KPD, LOE, MNF, NMG_____

A.ONF
A.ONF
A.ONF

B.OLH
B.OLH
B.OLH

C.MLH
C.MLH
C.MLH

D.MNH
D.MNH
D.MNH

Answer: B.OLH
B.OLH
B.OLH

125 ' दमट ' या शब्दाचा समानार्थी शब्द कोणता ?

A.दमदाटी

B.कोरड

C.ओलसर

D.शुष्क

Answer: C.ओलसर

126 **सूचना**: खालील आकृतीचे प्रतिबिंब शोधून काढा.

DIRECTIONS: Find the mirror image of the figure given below.

ہدایات: نیچے دیئے گئے شکل کی آئینہ معکوس شکل کیا ہوگی۔

मुख्य आकृती
Main Figure
اصل شکل

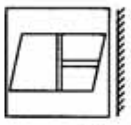

उत्तरासाठी पर्यायी आकृत्या
Answer Figure
جوابی شکل

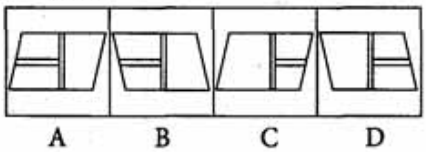

A. (A)

B. (B)

C. (C)

D. (D)

Answer: B. (B)

127 सध्या किमती वाढत आहेत. खालील पैकी कोणता आलेख ही परिस्थिती दर्शवितो?

These days, prices are rising. Which of the following graph shows this condition?

ان دنوں، قیمتیں بڑھ رہی ہے۔ نیچے دیے گئے گراف میں سے کونسا اس حالت کو دکھاتا ہے؟

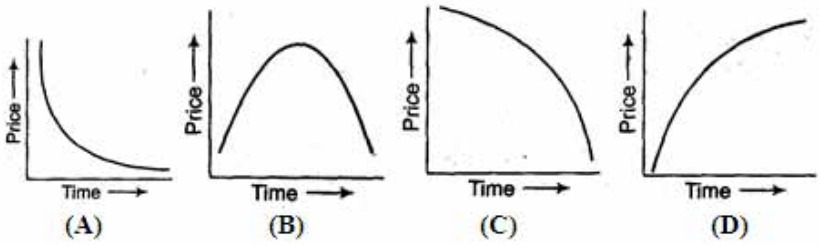

A. (A)

B. (B)

C. (C)

D. (D)

Answer: D. (D)

128 जर एक पाईप A, टाकी 20 मिनिटांमध्ये भरू शकतो, जर A पेक्षा 20% क्षमता असलेले 5 पाईप, टाकी किती वेळात भरतील:

If one pipe A can fill a tank in 20 minutes then 5 pipes each of 20% efficiency of A, can fill the tank in:

اگر ایک پائپ جو A کی 20% زیادہ کارکردگی کے مطابق ہیں، کتنا وقت لگائیں A ایک ٹینک کو20 منٹ میں بھر سکتا ہے تو 5 پائپ گےاس ٹینک کو بھر نے میں؟

A.80 मिनिट
A.80 minute
A.80منٹ

B.100 मिनिट
B.100 minute
B.100منٹ

C.20 मिनिट
C.20 minute
C.20منٹ

D.25 मिनिट
D.25 minute
D.25منٹ

Answer: C.20 मिनिट
C.20 minute
C.20منٹ

129 जर एखादा विद्यार्थी आपल्या शिक्षकांशी आपली समस्या समजावून सांगू इच्छित असेल आणि तो घरी जाऊन आपल्या शिक्षकांना भेट देतो. अशा स्थितीत शिक्षकाने

If a student wants to share his problems with his teacher, he visits his teacher for the same at home. In such a condition the teacher should-

اگر ایک طالب علم اپنے استاد سے اپنی مشکلات کا اشتراک کرنا چاہتا ہے، تو وہ اس سلسلے میں اپنے استاد کے گھر کا دورہ کرتا ہے۔اس حالت میں استاد کو چاہئے-

A.उचित मदत द्यावे आणि त्याच्या मनोधैर्य वाढवावे
A.Extend reasonable help and boost his morale
A.مناسب مدد کو بڑھائے اور ان کی حوصلہ افزائی کو بڑھائے

B.त्याला त्याच्या कुटुंबातून सुटका करण्याचे सुचवावे
B.Suggest him to escape from his family
B.اسے اپنے خاندان سے فرار ہونے کا مشورہ دیں

C.विद्यार्थ्याच्या पालकांशी संपर्क साधावे आणि त्यांच्या समस्या सोडवावे
C.Contact the student’s parents and solve his problem
C.طالب علم کے والدین سے رابطہ کریں اور اس کا مسئلہ حل کریں

D.कधीही शिक्षकाच्या घरी जावू नये हे सल्ला देणे
D.Warn him, never visit his home.
D.اسے خبردار کرو، کبھی بھی اپنے گھر نہ جانا.

Answer: A.उचित मदत द्यावे आणि त्याच्या मनोधैर्य वाढवावे
A.Extend reasonable help and boost his morale
A.مناسب مدد کو بڑھائے اور ان کی حوصلہ افزائی کو بڑھائے

130	Out of the given options which best expresses the meaning of the given Proverb? Birds of a feather flock together.
	A.Some people like to collect birds with colourful feathers
	B.Birds that have colourful feathers are most beautiful
	C.Beautiful birds are never found in groups
	D.People like to spend time with those who are similar to them
Answer:	D.People like to spend time with those who are similar to them

131	सूचनाः दिलेल्या पर्यायांमधून ऍनालॉगस शब्द निवडा. हरिणाचे जिराफाशी नाते आहे जसे कोल्ह्याचे ...सोबत आहे. DIRECTIONS: Choose the analogous word from the given alternatives. Deer is to Giraffe as Jackal is to _____. ہدایات: دیے گئے متبادل سے مطابق لفظ کا انتخاب کریں ہرن کا رشتہ زرافہ کے ساتھ ویسا ہی ہے جیسا کہ گیدڑ کا ----- کے ساتھ.
	A.झेब्रा A.Zebra A. نیل گائے
	B.घोडा B.Horse B. گھوڑے
	C.चतुष्पाद C.Antelope C. مرگ
	D.चिता D.Cheetah D. چیتا
Answer:	D.चिता D.Cheetah D. چیتا

132 एका विशिष्ट सांकेतिक भाषेमध्ये, जर MINUTE हा शब्द NMWKSO असा कूटबध्द केला जात असेल, REIGN साठी काय शब्द असेल?

In a certain code language, if the word MINUTE is coded as NMWKSO, then what is the code for the word REIGN?

ایک مخصوص ضابطے کی زبان میں، اگر لفظ MINUTE کو NMWKSO لکھا جاتا ہے، تو لفظ REIGN کو کیا لکھاجائیگا؟

A.SIPVM
A.SIPVM
A.SIPVM

B.SLRVM
B.SLRVM
B.SLRVM

C.SIRTN
C.SIRTN
C.SIRTN

D.SIRWM
D.SIRWM
D.SIRWM

Answer: D.SIRWM
D.SIRWM
D.SIRWM

133 उडणाऱ्या पक्षींची शेपटी म्हणून कार्य करते:

The tails of flying birds act as:

پروازکرنےوالے پرندوں کی دم کام آتی ہے :

A.शरीराचा एक भाग जो सुंदर आहे
A.A part of the body which is beautiful
A. جسم کا ایک خوبصورت حصہ ہے۔

B.माश्या आणि डासांचे संरक्षण करणारा एक भाग
B.A part which wards off flies and mosquitoes
B. مکھیوں اور مچھروں کو بھگانے میں

C.उडाण करताना पक्ष्याला मार्गदर्शन करणारा एकभाग
C.A part which guides the bird while flying
C.- جسم کا ایک حصہ جو پرندے کی رہنمائی کرتا ہے

D.एक भाग जे पक्ष्याला झेप घेण्यास मदत करतो
D.A part which helps the bird take off
D. جسم کا ایک حصہ پرندوں کو اترنے میں مدد کرتا

Answer: C.उडाण करताना पक्ष्याला मार्गदर्शन करणारा एकभाग
C.A part which guides the bird while flying
C.- جسم کا ایک حصہ جو پرندے کی رہنمائی کرتا ہے

134 मुलांना आपल्या पालकांपासून विभक्त होतांना जास्त चिंता किंवा / आणि घाबरण्याचे कारण म्हणून ओळखले जाते-

Excessive anxiety or/and panic experienced by children at being separated from their parents is known as

ان کے والدین سے الگ ہونے والے بچے کی طرف سے بہت زیادہ تشویش یا / اور خوفناک تجربہ ہوتا ہے

A.एसएडी
A.SAD
A.SAD

B.एसडीए
B.SDA
B.SDA

C.एएसडी
C.ASD
C.ASD

D.एडीएसडी
D.ADSD
D.ADSD

Answer: A.एसएडी
A.SAD
A.SAD

135 एखाद्या मुलाला चित्त एकाग्र करणे जमत नसल्यास त्याला यांपासून दूर ठेवले पाहिजे

A child who is having lack of concentration he should be kept away from

ایک بچہ جس میں توجہ ارتکاز کی کمی ہے اسے دور رکھنا چاہئے ان سے

A.प्रक्रिया केलेले अन्नपदार्थ
A.Processed Foods
A.پروسیسڈ فوڈ

B.कच्चा भाजीपाला
B.Raw Vegetables
B.خام سبزیوں

C.फळे
C.Fruits
C.پھلوں

D.तृणधान्ये
D.Cereals
D.کھانے کے اناج

Answer: A.प्रक्रिया केलेले अन्नपदार्थ
A.Processed Foods
A.پروسیسڈ فوڈ

136 Out of the given four words only one is not spelt correctly. Find the word that is not correctly spelt.

A.Buisness

B.Discipline

C.Official

D.Opportunity

Answer: A.Buisness

137 जर 19 जुलै, 1904 रोजी मंगळवार असेल, तर 16 फेब्रुवारी, 2019 रोजी काय वार असेल?

If Tuesday fall on 19 Ju1y 2019, what will be the day of 16 Feb, 2019?

اگر 19 جولائ 2019 کو منگل پڑ رہا ہو، تو 16 فروری 2019 کو کونسا دن ہوگا؟

A.मंगळवार
A.Tuesday
A.منگل

B.बुधवार
B.Wednesday
B.بدھ

C.गुरूवार
C.Thursday
C.جمعرات

D.सोमवार
D.Monday
D.پیر

Answer: D.सोमवार
D.Monday
D.پیر

138 सूचना: हे प्रश्न खालील माहितीवर आधारित आहेत.
पाच मुले - A, B, C, D आणि E हे रांग - I मध्ये उत्तर दिशेकडे तोंड करून बसलेली आहेत, आणि पाच मुली - P, Q, R, S आणि T - रांग - II मध्ये दक्षिण दिशेकडे तोंड करून बसलेल्या आहेत, ते त्याच क्रमाने असतील असे नाही. रांग - I मधील प्रत्येक मुलगा रांग - II च्या बरोबर एका मुली सामोर आहे. त्यांच्याबद्दल खालील माहिती दिलेली आहे.
A आणि त्या मुलाच्या दरम्यान फक्त दोन लोक बसतात जो Q च्या सामोर आहे, आही जो कोणत्याही शेवटाला बसलेला नाही. C हा B च्या तत्काळ डाव्या बाजूला आहे, परंतु ते दोघे E च्या समीप नाहीत. P त्या मुलाच्या समोर आहे जो D च्या तत्काळ उजवीकडे आहे. D हा Q च्या समोर बसलेला नाही. R त्या मुलीच्या डाव्या बाजूस आहे जी D च्या सामोर आहे. C हा D च्या सामोर नाही.
खालीलपैकी कोणते विधान खरे आहे?

DIRECTIONS: These questions are based on the following information.
Five boys – A, B, C, D and E – are sitting in row-I, facing North, and five girls – P, Q, R, S and T – are sitting in row-II facing South, not necessarily in the same order. Each boy in row - I is facing exactly one girl from row -II. The following information is known about them.
Only two persons sit between A and the boy who faces Q, who does not sit at any end. C is to the immediate left of B, but both of them are not adjacent to E. P is opposite the boy who is to the immediate right of D. D does not sit opposite Q. R is to the left of the girl who faces D. C does not face S.
Which of the following statements is true?

ہدایات: یہ سوالات مندرجہ ذیل معلومات پر مبنی ہیں۔
A اور Q کے درمیان صرف دو لوگ بیٹھے ہیں، جو کسی بھی سرے پر نہیں بیٹھا ہے۔ Q کے فوری دائیں طرف ہے۔ D اس لڑکے کے بالمقابل ہے جو P کے بغل میں نہیں ہیں۔ E بائیں طرف ہے، لیکن وہ دونوں D، Q کے سامنے نہیں ہے۔ C، S کا سامنا کرنے والی لڑکی کے بائیں طرف بیٹھی ہے۔ R، D مقابل نہیں بیٹھا ہے۔
مندرجہ ذیل میں سے کون سا بیان درست ہے؟

A.P D च्या सामोर बसते
A.P sits opposite D
A.P، D کے بالمقابل بیٹھی ہے

B.Q T च्या तत्काळ उजव्या बाजूला बसते
B.Q sits to the immediate right of T
B.Q، T کے فوری دائیں طرف بیٹھا ہے

C.R A च्या सामोर बसते
C.R sits opposite A
C.R، A کے بالمقابل بیٹھی ہے

D.S R आणि Q च्या बरोबर मध्ये बसते
D.S sits exactly between R and Q
D.S ٹھیک R اور Q کے درمیان بیٹھی ہے

Answer: C.R A च्या सामोर बसते
C.R sits opposite A
C.R، A کے بالمقابل بیٹھی ہے

139 निर्देश: खाली दिलेले प्रश्न वर्ण मालिकेवर आधारित आहेत. या प्रत्येक मालिकेत, काही अक्षरे गहाळ आहेत. योग्य पर्याय निवडा पाच पेक्षा अधिक अक्षरे गहाळ असल्यास, मालिकेतील शेवटचे पाच अक्षरे निवडा

pq- st- vw - y- a - c

DIRECTION: Questions given below are based on the letter series. In each of these series, some letters are missing. Select the correct alternative. If more than five letters are missing, select the last five letters of the series:

pq- st- vw - y- a - c

ہدایت نیچے دے ہے سوالات حرف سرج پر مشتمل ہیں . ہر میں کہیں حرف گمشدہ ہے . سہی اختیارات کو چنے . اگر پچ حرف گنمام ہو تو آخری پانچ حرفونکو چنے

pq- st- vw - y- a - c

A.uvwyu
A.uvwyu
A.uvwyu

B.uvaaw
B.uvaaw
B.uvaaw

C.defgh
C.defgh
C.defgh

D.wxywu
D.wxywu
D.wxywu

Answer: C.defgh
C.defgh
C.defgh

140	त्रिवेंद्र सिंह रावत हे _____चे मुख्यमंत्री आहेत Trivendra Singh Rawat is the Chief Minister of – تریویندر سنگھ راوت وزیر اعلی ہیں۔
	A.हिमाचल प्रदेश A.Himachal Pradesh A.ہماچل پردیش کے
	B.उत्तराखंड B.Uttarakhand B.اتراکھنڈ کے
	C.उत्तर प्रदेश C.Uttar Pradesh C.اترپردیش کے
	D.झारखंड D.Jharkhand D.جھارکھنڈ کے
Answer:	B.उत्तराखंड B.Uttarakhand B.اتراکھنڈ کے

141 सूचना: अर्थपूर्ण परिच्छेद निर्माण करण्यासाठी, खाली दिलेली (P), (Q) (R), (S) आणि (T) ही पाच वाक्ये योग्य अनुक्रमाने पुनर्रचना करा; त्यांनतर खालील प्रश्नांची उत्तर द्या. P. बाळ कृष्ण मूठभर धान्य पकडले आणि दरवाजाकडे पळाला परंतु सर्व धान्य खाली सांडले.
Q. लवकरच तिला जाणवले कि तिची फळांच्या टोपली रत्न आणि सोन्याने भरलेली आहे.
R. कृष्णाला काही फळे हवी होती, त्याने त्या स्त्रीकडे फळे मागितली परंतु तिने त्याबदल्यात मोबदला मागितला.
S. ते पाहून, फळविक्रेती स्त्री श्रीकृष्णाकडे मोहित झाली आणि त्याच्या मुठीत जे काय असेल त्याबदल्यात सर्व फळे त्याला दिली.
T. एकेदिवशी फळविक्रेती स्त्री कृष्णाच्या घराजवळून निघाली होती.

पुनर्रचना केल्यानंतर खालीलपैकी कोणते वाक्य पहिले असेल?

DIRECTION: Rearrange the following five sentences (P), (Q), (R), (S) and (T) in the proper sequence to form a meaningful paragraph; then answer the questions given below them.
P. Baby Krishna grabbed a handful of grains and ran towards the door but all the grains fell in the way.
Q. Soon she realized that her fruit basket was full of jewels and gold.
R. Krishna wanted to have some fruit, he asked the lady for fruit but the lady demanded something in return.
S. On seeing this, the fruit lady was completely smitten by Lord Krishna and gave him all the fruits in exchange for whatever was in his hands.
T. Once a lady who was selling fruits was crossing Shri Krishna's house.

Which of the following should be the FIRST sentence after rearrangement?

ہدایات: ان پانچ جملوں (P)، (Q)، (R)، (S) اور (T) کو با معنی پیرا بنانے کے لئے دوبارہ ترتیب دیجئے، پھر نیچے دے گئے سوالوں کے جواب دیجئے

P. بچہ کرشنا نے مٹھی بر اناج اٹھایا اور دروازے کی طرف باگا لیکن تمام اناج راستے میں گر گیا.
Q. جلدی اسکو احساس ہوا کی اسکی پھولوں کی ٹوکری جواہرات اور سونے سے بری ہے.
R. کرشنا کو کچھ میوہ چاہیے، اسنے عورت سے میوے کے لئے کہا لیکن عورت نے اسکے بدلے کچھ مانگا.
S. یے دیکھ کر، میوے والی عورت دیوتا کرشنا سے بہت متاثر ہوئی اور اسے سارے میوے دے دے بدلے اسکے کہ جو اسکے ہاتھ میں تھا.
T. ایک بار ایک میوہ بجھنے والی عورت شری کرشنا کے گھر سے گزری.

دوبارہ ترییب دینے کے بعد کون سا جملہ پہلے ہونا چاہیے؟

A.T
A.T
A.T

B.P
B.P
B.P

C.R
C.R
C.R

D.S
D.S
D.S

Answer: A.T
A.T
A.T

142 $\left(1-\frac{1}{2}\right)\left(1-\frac{1}{3}\right)\left(1-\frac{1}{4}\right)\left(1-\frac{1}{5}\right)\ldots\ldots\left(1-\frac{1}{m}\right)=?$

A. m

B. m + 1

C. 1/m

D. 1/m-1

Answer: A. m

143 ‘ आज नदीकडे जाणारे सर्व रस्ते बंद आहेत. ’ या वाक्यातील विशेषण ओळखा.

A.नदीकडे

B.जाणारे

C.सर्व

D.रस्ते

Answer: C.सर्व

144 जेजे लालपेख्लुआ हे _____या खेळाशी संबंधित आहेत

Jeje Lalpekhlua is associated with the game of –

جے جے لال پیکھولا کس کھیل سے جڑے ہوئے ہیں۔

A.हॉकी
A.Hockey
A.ہاکی

B.फुटबॉल
B.Football
B.فٹبال

C.क्रिकेट
C.Cricket
C.کرکٹ

D.यांपैकी कोणतेही नाही
D.None of these
D.ان میں سے کوئی نہیں

Answer: B.फुटबॉल
B.Football
B.فٹبال

145 शरीराचा कोणते अवयव कधीही विश्रांती घेत नाही?

Which organ of the body never rests?

جسم کا کونسا حصہ کبھی آرام نہیں کرتا ہے؟

A.स्नायू
A. Muscles
A.عضلات

B.यकृत
B. Liver
B.جگر

C.तंत्रिका
C. Nerves
C.اعصاب

D.हृदय
D. Heart
D.قلب

Answer: D.हृदय
D. Heart
D.قلب

146 खालीलपैकी अशुद्ध वाक्य कोणते ?

A.नीता कपडे धूत आहे.

B.तो आंबा खात आहे.

C.आम्ही सर्व सहलीला जाणार आहोत.

D.ते सर्व विटीदांडूला खेळत आहेत.

Answer: D.ते सर्व विटीदांडूला खेळत आहेत.

147 $\frac{7\times7\times7+3\times3\times3}{49-21+9}=?$

A. 10

B. 20

C. 60

D. 30

Answer: A. 10

148 $75\frac{11}{10000}$ हा अपूर्णांक दशांश रुपात?

The fraction $75\frac{11}{10000}$ in decimal form is?

$75\frac{11}{10000}$ کسر کی اعشاری شکل ہوگی

A. 0.0011

B. 0.07511

C. 75.0011

D. 75.00011

Answer: C. 75.0011

149 आपण सकाळी काय करतो?

What do we have in the morning?

ہم صبح میں کرتے ہیں؟

A.डिनर
A.Dinner
A. ڈنر

B.लंच
B.Lunch
B. دوپہر کے کھانے کے

C.स्नॅक्स
C.Snacks
C. نمکین

D.ब्रेकफास्ट
D.Breakfast
D. ناشتا

Answer: D.ब्रेकफास्ट
D.Breakfast
D. ناشتا

150 P हा Q च्या नैऋत्येला 40 मी. वर आहे. R हा Q च्या आग्नेयला 40 मी. वर असल्यास R हा P च्या कोणत्या दिशेला आहे?

P is 40 m South-West of Q. If R is 40 m South-East of Q, then in which direction is R with respect toP?

P، Q اگر - 40 میٹر پرواقع ہے R،Q کے جنوبی مغرب سمت میں 40 میٹر جنوبی مغرب میں ہو تو R،Pکے کس سمت میں ہوگا؟

A.पूर्व
A.East
A.مشرق

B.पश्चिम
B.West
B.مغرب

C.उत्तर पूर्व
C.North East
C.شمال مشرق

D.दक्षिण
D.South
D.جنوب

Answer: A.पूर्व
A.East
A.مشرق

151 निर्देश: खालील शब्दांची इंग्रजी शब्दकोशानुसार मांडणी करा.
(1) Repoint
(2) Reptile
(3) Repent
(4) Repute
(5) Report

DIRECTIONS: Arrange the following words according to the English dictionary.
(1) Repoint
(2) Reptile
(3) Repent
(4) Repute
(5) Report

ہدایت: انگریزی لغت کے مطابق مندرجہ ذیل الفاظ کو مرتب کریں۔
(1) Repoint
(2) Reptile
(3) Repent
(4) Repute
(5) Report

A.3, 1, 5, 2, 4
A.3, 1, 5, 2, 4
A.3, 1, 5, 2, 4

B.3, 5, 1, 2, 4
B.3, 5, 1, 2, 4
B.3, 5, 1, 2, 4

C.5, 1, 4, 3, 2
C.5, 1, 4, 3, 2
C.5, 1, 4, 3, 2

D.5, 4, 1, 3, 2
D.5, 4, 1, 3, 2
D.5, 4, 1, 3, 2

Answer: A.3, 1, 5, 2, 4
A.3, 1, 5, 2, 4
A.3, 1, 5, 2, 4

152 निर्देशः खालील अंक-अक्षरी-चिन्ह क्रम यांचा काळजीपूर्वक अभ्यास करा आणि खालील प्रश्नांची उत्तरे द्या.

R * T J L 2 $ D = M # 8 C % B < K 1 & A W? P E + Q @ 7 F 6

दिलेल्या पर्यायांपैकी कोणते घटक वर दिलेल्या व्यवस्थेच्या डावी कडून 18 व्या घटकाच्या डाव्या बाजूने 6 वा आहे?

DIRECTIONS: Study the following digit-letter-symbol sequence carefully and answer the questions given below.

R * T J L 2 $ D = M # 8 C % B < K 1 & A W? P E + Q @ 7 F 6

If all the symbols in the above arrangement are dropped, then which of the following will be the eighth from the right end?

ہدایت نیچے دی گی حرف نشان اور نمبرس کی ترتیب کو پڑھئے اور سوالات کا جواب دیجئے

R * T J L 2 $ D = M # 8 C % B < K 1 & A W? P E + Q @ 7 F 6

اگگر اپری ترتیبسے سارے نشان ہٹاوے گئے تو سیدھے ہاتھ سے آٹھوا حرف کیا ہوگا؟

A.A
A.A
A.A

B.C
B.C
B.C

C.P
C.P
C.P

D.M
D.M
D.M

Answer: A.A
A.A
A.A

153 भारताच्या खालीलपैकी कोणत्या वन्यजीव अभयारण्यामध्ये गेंड्याचे संवर्धन करण्याचा प्रकल्प मार्गस्थ आहे?

In which of the following wildlife sanctuary of India, is the project of conservation of Rhinos underway?

درج ذیل جنگلی زندگی سینکچریوں میں ، گینڈوں کے تحفظ کرنے کی منصوبہ بندی کی گئی ہے

A.बांदीपूर
A.Bandipur
A.باندیپور

B.पेरियार
B.Periyar
B. پیریار

C.काझीरंगा
C.Kaziranga
C. کاجیرنگا

D.गीर
D.Gir
D. گر

Answer: C.काझीरंगा
C.Kaziranga
C. کاجیرنگا

154 50% स्पिरीट असलेल्या शेरीच्या बटमधून बटलरने वाईन चोरी केली, मग त्याने त्याच्या जागी 20% स्पिरीट असलेली दुसरी वाईन टाकली. त्यामुळे नवीन मिश्रणामध्ये फक्त 30% सामर्थ्य (स्पिरीट) होते. त्याने चोरलेल्या मुळ वाईनचे प्रमाण?

A butler stole wine from a butt of sherry containing 50% of spirit, then he repleced it by different wine containing 20% spirit. Thus there was only 30% strength (sprit) in the new mixture. How much of the original wine did he steal?

ایک بٹلر نے شیری کی بٹ سے شراب چرایا جس میں 50 % اسپرٹ ہے، پھر اس نے 20% اسپرٹ والی مختلف شرابوں سے اسے بھر لیا. اس طرح نئے مرکب میں صرف 30% طاقت (سپرٹ) تھی.اس نے کتنی مقدار میں اصلی شراب چوری کی؟

A.1/3
A.1/3
A.1/3

B.2/3
B.2/3
B.2/3

C.1/2
C.1/2
C.1/2

D.1/4
D.1/4
D.1/4

Answer: B.2/3
B.2/3
B.2/3

155 सरळ रूप द्या: 632142 – 120012 = ?

Simplify: 632142 – 120012 = ?

سادہ بنائیں:
632142 – 120012= ?

A.522130
A.522130
A.522130

B.512030
B.512030
B.512030

C.512130
C.512130
C.512130

D.532130
D.532130
D.532130

Answer: C.512130
C.512130
C.512130

156 DIRECTIONS: A sentence with an underlined phrasal verb is given below. Out of the four options, choose the one which can be substituted for the given phrasal Verb.
The Airline had to do away with two of its Jet planes since they had been acting up lately.

A.not working properly

B.working properly

C.flying at a very high speed

D.flying very high

Answer: A.not working properly

157 पेट्रोलचा दर्जा या शब्दात सांगितला जातो-

Quality of Petrol is expressed in terms of-

پیٹرول کی کوالٹی کو _____ کی اصطلاح سے تعبیر کیا جاتا ہے۔

A.सीटेन संख्या
A.Cetane number
A.سیٹین نمبر

B.ओकटाइन संख्या
B.Octane number
B.اوکٹین نمبر

C.सोने संख्या
C.Gold Number
C.گولڈ نمبر

D.यापैकी एकही नाही
D.None of these
D.ان میں سے کوئی بھی نہیں

Answer: B.ओकटाइन संख्या
B.Octane number
B.اوکٹین نمبر

158 जर फासा 3 वेळा फिरवला, तर संभाव्य परिणामांची एकूण संख्या

If a dice is rolled 3 times, then the total number of possible outcomes is

اگر ایک ڈائس 3 بار پھینکی جائے، تو ممکنہ نتائج کی کل تعداد ہے

A.6^n
A.6^n
A.6^n

B.6^3
B.6^3
B.6^3

C.6^2
C.6^2
C.6^2

D.6^4
D.6^4
D.6^4

Answer: B.6^3
B.6^3
B.6^3

159 समजा एक बुद्धिमान विद्यार्थीच्या कुटुंबात काही समस्या झाल्या, त्याचा तुमच्यावर विश्वास आहे, आणि तो तुमच्या कडे समाधान साठी येतो या परिस्थितीत तुम्ही काय कराल?

Suppose an intelligent student became unattentive due to some family problems. As he has deep faith in you, he comes to you for its solution. What action will you take in this condition?

فرض کریں کہ ذہین طالب علم کچھ خاندان کے مسائل کی وجہ سے متاثر ہو گئے.جیسا کہ اس کو آپ پر گہرا اعتماد ہے، وہ اس کے حل کے لئے آپ کے پاس آتا ہے.اس حالت میں آپ کونسی کارروائی کریں گے؟

A.आपण स्वत: चे संरक्षण कराल कारण आपल्याला अशा प्रकारे आपला अपमान होण्याची भीती वाटते
A.You protect yourself as you fear your insult in such a issue
A.آپ اپنی حفاظت کرتے ہیں جیسے آپ اس طرح کے مسئلے میں آپ توہین سے ڈرتے ہیں

B.आपण धैर्याने विचार कराल आणि काही अनुकूल उपाय सुचवाल
B.You think patiently and suggest some favorable remedy
B.آپ صبر سے سوچتے ہیں اور کچھ سازگار علاج کا مشورہ دیتے ہیں

C.आपण कुटुंबाचा दोष ओळखून त्याला निस्वार्थ पणे दूर करण्याचा प्रयत्न कराल
C.You solve out your selfishness by knowing his family's weakness
C.آپ اسکے خاندان کی کمزوری کو جان کر اپنی خود غرضی کو حل کرتے ہیں

D.आपण समस्येमध्ये हस्तक्षेप न करता मुलाला त्याचा हाला वर सोडणार
D.You leave the child without interfering in his problem.
D.آپ اس کے مسئلے میں مداخلت کے بغیر بچے کو چھوڑدیتے ہیں.

Answer: B.आपण धैर्याने विचार कराल आणि काही अनुकूल उपाय सुचवाल
B.You think patiently and suggest some favorable remedy
B.آپ صبر سے سوچتے ہیں اور کچھ سازگار علاج کا مشورہ دیتے ہیں

160 मुलींच्या रांगेत दिव्या डावीकडून नवव्या आणि उजवीकडून सातव्या क्रमांकावर आहे. रांगेत एकूण किती मुली आहेत ?

In a row of girls, Divya is ninth from the left and seventh from the right. How many children are there in the row?

لڑکیوں کی کتار میں، دویا بہانے سے نو وی ہے اور دھانے سے ساتوی. کتار میں کتنے بچھے ہے؟

A.17
A.17
A.17

B.15
B.15
B.15

C.18
C.18
C.18

D.12
D.12
D.12

Answer: B.15
B.15
B.15

161 एका घनाकृतीच्या तीन अवस्था दाखविल्या आहेत. त्यांवर अवलंबून है शोधून काढा की दिलेल्या घनाकृतीमध्ये 5 या अंकाच्या विरुद्ध बाजूला कोणता अंक असेल?

Three positions of a cube are given. Based on them, find out, which number is found opposite number 5 in a given cube?

ہدایات: ایک کیوب کی تین حالتیں دی گئی ہیں۔ ان کی بنیاد پر، دریافت کیجیئے، کونسا نمبرکیوب میں دیئے گئے 5 نمبر کی اپوسٹ ہے ؟



A. 3

B. 4

C. 2

D. 6

Answer: D. 6

162	361 × 101 =? 361 × 101 =? 361 × 101 =?
	A.36451 A.36451 A.36451
	B.37461 B.37461 B.37461
	C.36461 C.36461 C.36461
	D.37561 D.37561 D.37561
Answer:	C.36461 C.36461 C.36461

163

विधान:
X राज्यात गुन्ह्याचा दर वाढत आहे.

कृतीचा कोर्स:
I. शाळांमध्ये योग सक्तीचे करा.
II. वरिष्ठ पोलीस अधिकार्यांची बदली करा.

Statement:
Crime rate in city X is increasing.

Course of actions:
I. Make yoga compulsory in schools.
II. Transfer senior police officers.

بیان:
X شہر میں جرائم کی شرح بڑھ رہی ہے۔

لائحہ عمل:
I۔اسکولوں میں یوگا کو لازم کر دیں۔
II۔ سینیئر پولیس افسران کا تبادلہ کر دیں

A.फक्त I अनुसरून आहे
A.Only I follows
A. صرف I لاگو ہو گا۔

B.फक्त II अनुसरण करते आहे
B.Only II follows
B. صرف II لاگو ہو گا۔

C.एकतर I किंवा II अनुसरून आहे
C.Either I or II follows
C. I یا II میں سے ایک لاگو ہو گا۔

D.I किंवा II दोन्हीपैकी काहीही अनुसरण करत नाही
D.Neither I nor II follows
D. I اور II میں سے کوئی بھی لاگو نہیں ہو گا۔

Answer:

D.I किंवा II दोन्हीपैकी काहीही अनुसरण करत नाही
D.Neither I nor II follows
D. I اور II میں سے کوئی بھی لاگو نہیں ہو گا۔

164

Out of the four alternatives, choose the one which can be substituted for the given words/sentence.
A person giving too much attention to small details and wanting everything to be correct and perfect

A.Fastidious

B.Gullible

C.Lazy

D.Greedy

Answer: A.Fastidious

165 सूचना : खालील प्रत्येक प्रश्नात दोन विधाने I आणि II दिलेले आहेत. हे विधान एकतर स्वतंत्र कारण असू शकतात किंवा स्वतंत्र कारणांचे परिणाम असू शकतात. यांपैकी एक विधान इतर विधानाचा परिणाम असू शकतो. दोन्ही विधाने वाचा आणि खालीलपैकी कोणत्या उत्तराचा पर्याय या दोन्ही विधानांमधील संबंधांचे वर्णन करतो ते ठरवा.

विधान :
I. गेल्या सोमवारी पासून राज्य ‘X’ मध्ये कारची विक्री कमी झाली आहे.
II. राज्य ‘X’ ने अशा कारांची नोंदणी स्थगित केली आहे जे अलीकडेच नमूद केलेल्या उत्सर्जन नियमांची पुष्टी करत नाहीत.

DIRECTIONS: Below in each question are given two statements I and II. These statements may be either independent causes or may be effects of independent causes. One of these statements may be the effect of the other statement. Read both the statements and decide which of the following answer choice correctly depicts the relationship between these two statements.

Statements:
I. The sale of cars has dropped in the state ‘X’ since last Monday.
II. The State ‘X’ has suspended registration of cars which do not confirm to the emission norms stipulated recently.

ہدایات: نیچے ہر سوال میں دو بیانات I اور II آ تو یہ بیانات یا ان‌دیے گئے ہیں۔ ان‌دیے گئے ہیں۔ یہ بیانات یا آزاد وجوہات کے اثرات ہو سکتے ہیں۔ آزاد وجوہات یا پھر بیانات میں سے ایک بیان دوسرے کا اثر ہو سکتا ہے۔دونوں بیانات پڑھیں اور فیصلہ کریں کہ نیچے دیے گئے کس جواب کا انتخاب ان دونوں بیانات کے در میان تعلق کو ٹھیک سے ظاہر کرتا ہے۔

بیانات:
I – ریاست میں کاروں کی فروخت کم ہو گئی ہے۔ X پچھلے پیر سے
II - X ریاست نے ایسی کاروں کی رجسٹریشن معطل کر دی ہے جو حال ہی میں متعین کردہ اخراج کے معیار سے مطابقت نہیں رکھتیں۔

A.I हा परिणाम आहे आणि II हे त्याचे तात्काळ आणि प्रमुख कारण आहे;
A.I is effect and II is its immediate and principal cause;
A. بیان نمبر I اثر ہے اور بیان نمبر II اس کی فوری اور بنیادی وجہ ہے۔

B.I हे तात्काळ आणि प्रमुख कारण आहे आणि II हा त्याचा परिणाम आहे;
B.I is the immediate and principal cause and II its effect;
B. بیان نمبر I فوری اور بنیادی وجہ ہے اور بیان نمبر II اس کا اثر ہے۔

C.I हा परिणाम आहे परंतु II हे त्याचे तात्काळ आणि प्रमुख कारण नाही;
C.I is an effect but II is not its immediate and principal cause;
C. بیان نمبر I بیان نمبر II اثر ہے لیکن بیان نمبر اس کی فوری اور بنیادی وجہ نہیں ہے۔

D.II हा परिणाम आहे परंतु I हे त्याचे तात्काळ आणि प्रमुख कारण नाही;
D.II is an effect but I is not its immediate and principal cause;
D.بیان نمبر II بیان نمبر I اثر ہے لیکن بیان نمبر اس کی فوری اور بنیادی وجہ نہیں ہے۔

Answer: A.I हा परिणाम आहे आणि II हे त्याचे तात्काळ आणि प्रमुख कारण आहे;
A.I is effect and II is its immediate and principal cause;
A. بیان نمبر I بیان نمبر II اثر ہے اور بیان نمبر اس کی فوری اور بنیادی وجہ ہے۔

166 ABC हा त्रिकोण आहे आणि BC ला समांतर असा DE काढला जो D आणि E बिंदूमध्ये इतर बाजूंना कापतो. जर AB = 4.8 सेंमी, AC = 2.4 सेंमी, AD = 4.1 सेंमी असेल, तर AE बरोबर किती:

ABC is a triangle and DE is drawn parallel to BC cutting the other sides at D and E. If AB = 4.8 cm, AC = 2.4cm, AD = 4.1cm, then AE is equal to:

ABC ایک مثلث ہے اور DE کو متوازی BC کے اطراف پر دوسری AB = AD = 4.1cm پر بنایا گیا ہے اگر D اور E، پھر AE برابر ہے cm ، AC = 2.4cm، 4.8:

A.1.05 सेंमी
A.1.05 cm
A.1.05 سینٹی میٹر

B.2.05 सेंमी
B.2.05 cm
B.2.05 سینٹی میٹر

C.3.05 सेंमी
C.3.05 cm
C.3.05 سینٹی میٹر

D.4.05 सेंमी
D.4.05 cm
D.4.05 سینٹی میٹر

Answer: B.2.05 सेंमी
B.2.05 cm
B.2.05 سینٹی میٹر

167 सूचना: अर्थपूर्ण परिच्छेद निर्माण करण्यासाठी, खाली दिलेली (P), (Q) (R), (S) आणि (T) ही पाच वाक्ये योग्य अनुक्रमाने पुनर्रचना करा; त्यांनतर खालील प्रश्नांची उत्तर द्या. P. बाळ कृष्ण मूठभर धान्य पकडले आणि दरवाजाकडे पळाला परंतु सर्व धान्य खाली सांडले.
Q. लवकरच तिला जाणवले कि तिची फळांच्या टोपली रत्न आणि सोन्याने भरलेली आहे.
R. कृष्णाला काही फळे हवी होती, त्याने त्या स्त्रीकडे फळे मागितली परंतु तिने त्याबदल्यात मोबदला मागितला.
S. ते पाहून, फळविक्रेती स्त्री श्रीकृष्णाकडे मोहित झाली आणि त्याच्या मुठीत जे काय असेल त्याबदल्यात सर्व फळे त्याला दिली.
T. एकेदिवशी फळविक्रेती स्त्री कृष्णाच्या घराजवळून निघाली होती.

पुनर्रचना केल्यानंतर खालीलपैकी कोणते वाक्य चौथे असेल?

DIRECTION: Rearrange the following five sentences (P), (Q), (R), (S) and (T) in the proper sequence to form a meaningful paragraph; then answer the questions given below them.
P. Baby Krishna grabbed a handful of grains and ran towards the door but all the grains fell in the way.
Q. Soon she realized that her fruit basket was full of jewels and gold.
R. Krishna wanted to have some fruit, he asked the lady for fruit but the lady demanded something in return.
S. On seeing this, the fruit lady was completely smitten by Lord Krishna and gave him all the fruits in exchange for whatever was in his hands.
T. Once a lady who was selling fruits was crossing Shri Krishna's house.

Which of the following should be the FOURTH sentence after rearrangement?

ہدایات: ان پانچ جملوں (P)، (Q)، (R)، (S) اور (T) کو با معنی پیرا بنانے کے لئے دوبارہ ترتیب دیجئے، پھر نیچے دے گئے سوالوں کے جواب دیجئے

P. بچہ کرشنا نے مٹھی بر اناج اٹھایا اور دروازے کی طرف باگا لیکن تمام اناج راستے میں گر گیا.
Q. جلدی اسکو احساس ہوا کی اسکی پھولوں کی ٹوکری جواہرات اور سونے سے بری ہے.
R. کرشنا کو کچھ میوہ چاہیے، اسنے عورت سے میوے کے لئے کہا لیکن عورت نے اسکے بدلے کچھ مانگا.
S. یے دیکھ کر، میوے والی عورت دیوتا کرشنا سے بہت متاثر ہوئی اور اسے سارے میوے دے دے بدلے اسکے کہ جو اسکے ہاتھ میں تھا.
T. ایک بار ایک میوہ بجھنے والی عورت شری کرشنا کے گھر سے گزری.

دوبارہ ترییب دینے کے بعد کون سا جملہ چوتھا ہونا چاہیے؟

A.S
A.S
A.S

B.P
B.P
B.P

C.Q
C.Q
C.Q

D.R
D.R
D.R

Answer: A.S
A.S
A.S

168 सूचना: खालील प्रश्नांमध्ये दिलेल्या पर्यायांमधून संबंधित अक्षर/शब्द/संख्या निवडा.

DIRECTIONS: In the following question, select the related letter/word/number from the given alternatives.

Eye: See :: Leg : ?

سمت: مندرجہ ذیل سوال میں، دیے گئے متبادل سے متعلقہ حرف/لفظ/نمبر منتخب کریں۔

آنکھ: دیکھنا :: ٹانگ : ؟

A.दृष्टी
A.Vision
A.بصارت

B.वॉक
B.Walk
B.چلنا

C.हात
C.Hand
C.ہاتھ

D.जोडा
D.Shoe
D.جوتا

Answer: B.वॉक
B.Walk
B.چلنا

169 $3^2 \times 9^2 = (3)^?$ मध्ये x चे मूल्य आहे:

The value of x for which $3^2 \times 9^2 = (3)^x$ holds is:

$3^2X9^2 = 3^X$ کا مان جسکے لئے X

A.2
A.2
A.2

B.3
B.3
B.3

C.6
C.6
C.6

D.8
D.8
D.8

Answer: C.6
C.6
C.6

170 विद्युयत चुम्बकीय तरंग अस्तित्वात आहे हा सिद्धात प्रथम कोणी सांगितला?

Who first theorized the existence of electromagnetic waves?

سب سے پہلے ایکٹرومیگنیٹک لہروں کی موجودگی کی تھیوری کس نے پیش کی؟

A.हर्ट्झ
A. Hertz
A.ہرٹز

B.मॅक्सवेल
B. Maxwell
B.میکس وال

C.मार्कोनी
C. Marconi
C.مارکونی

D.रोमर
D. Romer
D.رومر

Answer: B.मॅक्सवेल
B. Maxwell
B.میکس وال

171 सूचना: हे प्रश्न खालील माहितीवर आधारित आहेत.
पाच मुले - A, B, C, D आणि E हे रांग - I मध्ये उत्तर दिशेकडे तोंड करून बसलेली आहेत, आणि पाच मुली - P, Q, R, S आणि T - रांग - II मध्ये दक्षिण दिशेकडे तोंड करून बसलेल्या आहेत, ते त्याच क्रमाने असतील असे नाही. रांग - I मधील प्रत्येक मुलगा रांग - II च्या बरोबर एका मुली सामोर आहे. त्यांच्याबद्दल खालील माहिती दिलेली आहे.
A आणि त्या मुलाच्या दरम्यान फक्त दोन लोक बसतात जो Q च्या सामोर आहे, आही जो कोणत्याही शेवटाला बसलेला नाही. C हा B च्या तत्काळ डाव्या बाजूला आहे, परंतु ते दोघे E च्या समीप नाहीत. P त्या मुलाच्या समोर आहे जो D च्या तत्काळ उजवीकडे आहे. D हा Q च्या समोर बसलेला नाही. R त्या मुलीच्या डाव्या बाजूस आहे जी D च्या सामोर आहे. C हा D च्या सामोर नाही.
खालीलपैकी चार दिलेल्या माहितीवर आधारित एका विशिष्ट प्रकारे समान आहेत आणि त्यामुळे एक गट तयार केला जातो. त्या समूहाचे कोण सदस्य नाही ते शोधा?

DIRECTIONS: These questions are based on the following information.
Five boys – A, B, C, D and E – are sitting in row-I, facing North, and five girls – P, Q, R, S and T – are sitting in row-II facing South, not necessarily in the same order. Each boy in row - I is facing exactly one girl from row -II. The following information is known about them.
Only two persons sit between A and the boy who faces Q, who does not sit at any end. C is to the immediate left of B, but both of them are not adjacent to E. P is opposite the boy who is to the immediate right of D. D does not sit opposite Q. R is to the left of the girl who faces D. C does not face S.
Four of the following are alike in a certain way based on the given information and so form a group. Find the one which does not belong to that group.

ہدایات: یہ سوالات مندرجہ ذیل معلومات پر مبنی ہیں۔
A اور Q کے درمیان صرف دو لوگ بیٹھے ہیں، جو کسی بھی سرے پر نہیں بیٹھا ہے۔ Q کے فوری دائیں طرف ہے۔ D اس لڑکے کے بالمقابل ہے جو P کے بغل میں نہیں ہیں۔ E بائیں طرف ہے، لیکن وہ دونوں C، B کے فوری C، S کا سامنا کرنے والی لڑکی کے بائیں طرف بیٹھی ہے۔ D، Q کے سامنے نہیں ہے۔ R، D کا سامنا کرنے والے لڑکے کے مقابل نہیں بیٹھا ہے۔
دی گئی معلومات کی بنیاد پر مندرجہ ذیل پانچ میں سے چار ایک خاص طریقہ میں ایک جیسے ہیں اور اس طرح ایک گروپ کی تشکیل کرتے ہیں۔ ایسے شخص کو تلاش کریں جس کا تعلق اس گروپ سے نہیں ہے؟

A.B
A.B
A.B

B.C
B.C
B.C

C.A
C.A
C.A

D.R
D.R
D.R

Answer: A.B
A.B
A.B

172 निर्देश: पुढील प्रश्नांपैकी प्रत्येक प्रश्नात एक संख्या गहाळ आहे. मालिकेचा नमुना समजून घ्या आणि योग्य संख्या निवडा.
2, 9, 23, 3, 8, 25, 4, ... , 27

DIRECTION: In each of the following questions, one number is missing in the series. You have to understand the pattern of the series and insert the number.

2, 9, 23, 3, 8, 25, 4, ... , 27

ہدایت جیل کے ہر سوال میں سرج کا ایک نمبر گمشدہ ہے . آپکو اس سرج کو سمجھنا ہے. اور گمشدہ نمبر کو یہا کھوجنا ہے

2, 9, 23, 3, 8, 25, 4, ... , 27

A.7
A.7
A.7

B.29
B.29
B.29

C.23
C.23
C.23

D.14
D.14
D.14

Answer: A.7
A.7
A.7

173 दरमहा पैशांवरील व्याज हे एक रूपयाला 1 पैसा एवढे आहे, तर प्रति वर्ष दर किती टक्के आहे?

If the interest on money be 1 paisa per rupee per month, what is the rate per cent per annum?

/اگر رقم ایک روپیہ پر ماہانہ 1 پیسہ سود ہے، تو سالانہ فیصد در کیا ہوگی؟

A.10%
A.10%
A.10%

B.11%
B.11%
B.11%

C.15%
C.15%
C.15%

D.12%
D.12%
D.12%

Answer: D.12%
D.12%
D.12%

174 खालीलपैकी नपुंसकलिंगी शब्द ओळखा.

A.सुवासिनी

B.सुशिक्षित

C.सुलक्षण

D.सुरपती

Answer: C.सुलक्षण

175 जर S × T चा अर्थ ‘S हा T चा भाऊ आहे’, S + T चा अर्थ ‘S हा T चे वडील आहे’, तर खालीलपैकी कशाद्वारे ‘O’ हा R चा चुलतभाऊ आहे असे दिसते?

If S × T means ‘S is brother of T’, S + T means ‘S is the father of T’, which of the following shows ‘O’ is the cousin of R?

اگر T × S کا مطلب T S کا بھائی ہے، T+S کا مطلب 'T S' کا باپ ہے، ان میں سے کون دکھاتا ہے کہ 'R' O کا چچا زاد ہے؟

A.R × T + O
A.R × T + O
A.R × T + O

B.R + T × O
B.R + T × O
B.R + T × O

C.R × O × T
C.R × O × T
C.R × O × T

D.यापैकी एकही नाही
D.None of these
D.ان میں سے کوئی نہیں

Answer: D.यापैकी एकही नाही
D.None of these
D.ان میں سے کوئی نہیں

176 **सूचना**: खालील प्रश्नात उत्तरातील पर्यायांपैकी कोणत्या पर्यायी आकृतीत प्रश्नातील आकृती अंतर्भूत आहे?

DIRECTIONS: In the given question find the answer figure in which question figure is embedded.

ہدایات: دیئے گئے سوال میں جواب والی شکل دریافت کیجیئے جس میں سوال والی شکل سرایت کرگئی ہے۔

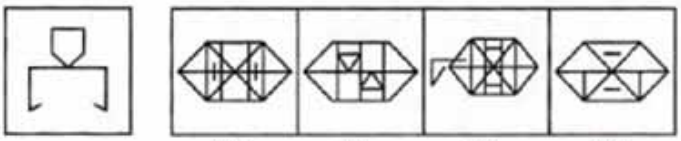

A. (A)

B. (B)

C. (C)

D. (D)

Answer: C. (C)

177 जर त्रिकोणाचे क्षेत्रफळ 1176 सेंमी^{2} असेल आणि त्याचा पाया आणि सुसंग उंचीचे गुणोत्तर 4:3 असेल, तर त्रिकोणाची उंची काय आहे?

If area of a triangle is 1176 cm^2 and ratio of its base and corresponding height is 4 : 3, then what is the height of the triangle?

اگر ایک مثلث کا رقبہ 1176 مربع سینٹی میٹر ہے اور اسکی تلی کا تناسب اور متساوی اونچائی 4: 3 ہے، تو مثلث کی اونچائی کیا ہے؟

A.42 सेंमी
A.42 cm
A.42سینٹی میٹر

B.52 सेंमी
B.52 cm
B.52سینٹی میٹر

C.54 सेंमी
C.54 cm
C.54 سینٹی میٹر

D.56 सेंमी
D.56 cm
D.56 سینٹی میٹر

Answer: A.42 सेंमी
A.42 cm
A.42 سینٹی میٹر

178 बलाची व्याख्या न्यूटनच्या यातून येते-

Definition of force comes from Newton's—

زور کی تعریف نیوٹن کے _____ سے نکلتی ہے۔

A.गतीचा पहिला नियम
A.First law of motion
A.موشن(حرکت) کے پہلا قانون

B.गतीचा दुसरा नियम
B.Second law of motion
B.موشن (حرکت) کا دوسرا قانون

C.गतीचा तिसरा नियम
C.Third law of motion
C.موشن (حرکت) کا تیسرا قانون

D.गुरूत्वाकर्षणाचा नियम
D.Law of gravitation
D.ثقالت کے قانون

Answer: A.गतीचा पहिला नियम
A.First law of motion
A.موشن(حرکت) کے پہلا قانون

179 प्राणी पेशीमध्ये काय उपस्थित नाही?

Which is not present in animal cells?

جانورکے خلیات (سیل) میں ان میں سے کیا نہیں ہوتا ہے؟

	A.पेशी भित्तिका A.Cell wall A.سیل وال
	B.पेशी आवरण B. Cell membrane B.سیل ممبرین
	C.कोशिका द्रव्य C. Cytoplasm C.سائٹوپلازم
	D.वरील सर्व D. all of the above D.ان میں سے سبھی
Answer:	A.पेशी भित्तिका A.Cell wall A.سیل وال

180 सूचना: प्रत्येक प्रश्नाला एक प्रमुख विधानासोबत चार विधाने आहेत ज्यांच्याखाली A, B, C आणि D असे चार विधान आहेत. क्रमवार विधानांची जोडी निवडा ज्यामध्ये प्रथम विधान दुसऱ्या विधानाला सुचवते, आणि दोन्ही विधाने तर्किकदृष्ट्या प्रमुख विधानासोबत निगडित असेल.

जेंव्हा मी शॉपिंगला जातो, मी क्षुल्लक गोष्टींवर पैसा घालवत नाही.
A. मी शॉपिंगला गेलो
B. मी शॉपिंगला गेलो नाही
C. मी क्षुल्लक गोष्टींवर पैसा घालवला नाही
D. मी क्षुल्लक गोष्टींवर पैसा घालवला

DIRECTIONS: Each question has a main statement followed by four statements labelled A, B, C and D. Choose the ordered pair of statements, where the first statement implies the second, and the two statements are logically consistent with the main statement.

If I go for shopping , I don’t waste money on trivial things.
A. I went for shopping
B. I did not go for shopping
C. I did not waste money on trivial things.
D. I wasted money on trivial things.

ہدایت: ہر سوال میں ایک جملہ ہے جسکے بعد چار جملےاے، بی،سی اور ڈی کے نام سے دئے گئے ہیں اسمیں منسلک جوڑیوں کو چنئے۔ جہاں پہلا جملہ دوسرے جملہ کی اور اشارہ کر رہا ہے اور دو جملے منطقی مرکزی بیان کے مطابق ہیں

میں شاپنگ پر جاؤں تو فضول چیزوں پر پیسے ضائع نہیں کرتا۔
Aمیں شاپنگ کرنے گیا ۔
Bمیں شاپنگ کرنے نہیں گیا ۔
C-میں نے فضول چیزوں پر پیسے ضائع نہیں کیئے ۔
D-میں نے فضول چیزوں پر پیسے ضائع کیئے ۔

A.AC
A.AC
A.AC

B.BC
B.BC
B.BC

C.DA
C.DA
C.DA

D.CD
D.CD
D.CD

Answer: A.AC
A.AC
A.AC

181 एका व्यक्तीने काही रु. 1 ला 25 संत्री या दराने काही संत्री खरेदी केली. 25% नफा मिळवण्यासाठी रु. 1 ला त्याने किती संत्र्यांची विक्री करावी?

A man purchased some oranges at the rate of 25 oranges for Rs 1. How many for Rs 1 should he sell to gain 25% profit?

ایک آدمی نے 25 سنترے فی روپیہ کی قیمت پر کچھ سنتروں کو خریدا. 25%منافع حاصل کرنے کے لئے اسے 1 روپے میں کتنے فروخت کرنا چاہئے؟

A.20
A.20
A.20

B.30
B.30
B.30

C.40
C.40
C.40

D.50
D.50
D.50

Answer: A.20
A.20
A.20

182 सब्रिनाने यावर्षी आपला 79वा वाढदिवस साजरा केला, तरीही ती समाजात सक्रिय असून तिला नवीन गोष्टी शिकून घेणे आवडते आणि ती कविता करते आणि अलीकडे चित्रकलेतही आपला हात आजमावून पाहत आहे. तिच्या अनुकूलन क्षमतेची ही सर्व उदाहरणे हे प्रदर्शित करतात:-

Sabrina celebrated 79th Birthday this year sill the is active in the society loves to learn new things, writes poetry and recently is trying her hand on painting these all examples of her adaptive capacities demonstrate:-

سبرینا نے اس سال 79واں سالگرہ منایا پھربھی وہ سماج میں فعال ہیں نئی چیزیں سیکھنا پسند کرتی ہے، شعروشاعری لکھتی ہے حالیہ دنوں میں انہوں نے پینٹنگ میں اپنا ہاتھ آزما رہی ہے یہ سبھی چیزیں ان کے تطبیقی صلاحیت کی مظہر ہیں:-

A.कालिक वय
A.chronological age
A.گنتی کے لحاظ سے عمر

B.सामाजिक वय
B.social age
B.سماجی عمر

C.जैविक वय
C.biological age
C.حیاتیاتی عمر

D.मानसिक वय
D.psychological age
D. نفسیاتی عمر

Answer: D.मानसिक वय
D.psychological age
D. نفسیاتی عمر

183 ‘ जलौघ ’ या शब्दाची संधी सोडवा.

A.जल + औघ

B.जल + ओघ

C.ज + लौघ

D.जला + ऊघ

Answer: B.जल + ओघ

184 खालीलपैकी शुद्ध शब्द कोणता ?

A.खसखशीत

B.खसखषीत

C.खसखशित

D.खसखषित

Answer: A.खसखशीत

185	खालीलपैकी अशुद्ध शब्द कोणता ?
	A.झपाटणे
	B.झांझर
	C.झावळणे
	D.झींगणे
Answer:	D.झींगणे

186	रणथंबोर राष्ट्रीय उद्यान _____या राज्यामध्ये आहे The Ranthambore National Park is in the state of – رنتھمبور قومی پارک ہے۔
	A.उत्तर प्रदेश A.Uttar Pradesh A.اترپردیش میں
	B.राजस्थान B.Rajasthan B.راجستھان میں
	C.हिमाचल प्रदेश C.Himachal Pradesh C.ہماچل پردیش میں
	D.उत्तराखंड D.Uttarakhand D.اتراکھنڈ میں
Answer:	B.राजस्थान B.Rajasthan B.راجستھان میں

187	एका वर्गातील 54 विद्यार्थ्यांपैकी 22 मुली आहेत. मुलींची टक्केवारी काय आहे? Out of 54 students in a class 22 are girls. What is the percentage of girls? ایک کلاس میں 54 میں سے 22 طلباء لڑکیاں ہیں. لڑکیوں کی فیصد کیا ہے؟

A.39%

A.39%

A.39%

B.40.74%

B.40.74%

B.40.74%

C.43%

C.43%

C.43%

D.41%

D.41%

D.41%

Answer: B.40.74%

B.40.74%

B.40.74%

188 संलग्न आकृतीमध्ये, AE∥CD आणि BC∥ED, तर Y काढा.

In the adjoining figure, AE∥CD and BC∥ED, then find Y.

محلقہ شکل میں، AE∥CD اور BC∥ED، پھر Y تلاش کریں۔

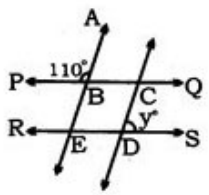

(A) 70°

(B) 60°

(C) 45°

(D) 90°

Answer: (A) 70°

189 **सूचना:** खालील प्रश्नात उत्तरातील पर्यायांपैकी कोणत्या पर्यायी आकृतीत प्रश्नातील आकृती अंतर्भूत आहे?

DIRECTIONS: In the given question find the answer figure in which question figure is embedded.

ہدایات: دیئے گئے سوال میں، جواب کی شکل کو دریافت کیجیئے جو سوال میں سرایت کر گئی ہے۔

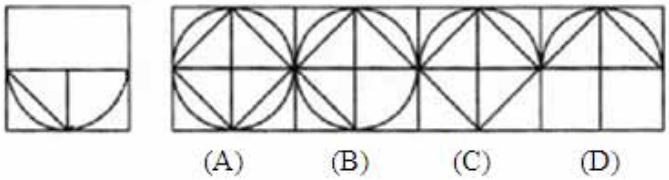

A. (A)

B. (B)

C. (C)

D. (D)

Answer: C. (C)

190 शशी पश्चिमेला तीन किलोमीटर जातो आणि मग डावीकडे वळून दोन किलोमीटर जातो आणि मग उजवीकडे वळतो आणि मग एक किलोमीटर जातो. तो पुन्हा उजवीकडे वळतो आणि पाच किलोमीटर जातो. तर तो सुरुवातीच्या ठिकाणापासून किती दूर आहे?

Shashi travels three kilometers to the West and then turns left and goes two kilometers and then turns right and then goes one kilometer. He again turns right and goes five kilometers. How far is he from the starting point?

ششی تین کلومیٹر مغرب کی طرف سفر کرتا ہے اور پھر بائیں مڑتا ہے اور دو کلومیٹر تک جاتا ہے اور پھر دائیں مڑتا ہے اور پھر ایک کلومیٹر تک جاتا ہے۔ وہ پھر دائیں مڑتا ہے اور پانچ کلومیٹر جاتا ہے۔ وہ اپنے شروعاتی نقطہ سے کتنی دور ہے؟

A.5 किमी
A.5 km
A.5 کلومیٹر

B.2 किमी
B.2 km
B.2 کلومیٹر

C.3 किमी
C.3 km
C.3 کلومیٹر

D.4 किमी
D.4 km
D.4 کلومیٹر

Answer: A.5 किमी
A.5 km
A.5 کلومیٹر

191 राज्याच्या राज्यपाल यांच्याद्वारे नियुक्त केला जातो-

The Governor of a state is appointed by -

ریاست کا گورنر کس کی طرف سے مقرر کیا جاتا ہے -

A.मुख्यमंत्री
A.Chief Minister
A. وزیر اعلی

B.गृहमंत्री
B.Home Minister
B. وزیر داخلہ

C.पंतप्रधान
C.Prime Minister
C. وزیراعظم

D.राष्ट्रपती
D.President
D. صدر

Answer: D.राष्ट्रपती
D.President
D. صدر

192 सूचना: प्रत्येक प्रश्नाला एक प्रमुख विधानासोबत चार विधाने आहेत ज्यांच्याखाली A, B, C आणि D असे चार विधान आहेत. क्रमवार विधानांची जोडी निवडा ज्यामध्ये प्रथम विधान दुसऱ्या विधानाला सुचवते, आणि दोन्ही विधाने तर्किकदृष्ट्या प्रमुख विधानासोबत निगडित असेल.

तीच्याकडे एकतर कुत्रा आहे किंवा मांजर आहे.
A. तीच्याकडे एक मांजर आहे.
B. तीच्याकडे मांजर नाही.
C. तिच्याकडे एक कुत्रा आहे.
D. तिच्याकडे कुत्रा नाही.

DIRECTIONS: Each question has a main statement followed by four statements labelled A, B, C and D. Choose the ordered pair of statements, where the first statement implies the second, and the two statements are logically consistent with the main statement.

She has either a dog or a cat.
A. She has a cat
B. She does not have a cat
C. She has a dog
D. She does not have a dog

ہدایت: ہر سوال میں ایک جملہ ہے جسکے بعد چار جملےاے، بی،سی اور ڈی کے نام سے دئے گئے ہیں اسمیں منسلک جوڑیوں کو چنئے۔ جہاں پہلا جملہ دوسرے جملہ کی اور اشارہ کر رہا ہے اور دو جملے منطقی مرکزی بیان کے مطابق ہیں

اس کے پاس یا تو ایک کتا ہے یا ایک بلی
A۔ اس کے پاس بلی ہے
B۔ اس کے پاس بلی نہیں ہے
C۔ اس کے پاس کتا ہے
D۔ اس کے پاس کتا نہیں ہے

A.AC
A.AC
A.AC

B.DA
B.DA
B.DA

C.CB
C.CB
C.CB

D.AB
D.AB
D.AB

Answer: B.DA
B.DA
B.DA

193 सूचना: दिलेल्या पर्यायांमधून वेगळे ते बाहेर काढा.

DIRECTIONS: Find the odd one out from the given alternatives.

سمت: دیے گئے متبادل میں سے بے جوڑ کو تلاش کرو۔

A.मुंगी
A.ANT
A.چیونٹی

B.बाहू
B.ARM
B.بازو

C.घुबड
C.OWL
C.الو

D.ठेवणे
D.PUT
D.رکھنا

Answer: D.ठेवणे
D.PUT
D.رکھنا

194 दमस्कुस ही _____ ची राजधानी आहे

Damascus is the capital of –

دمشق راجدھانی ہے۔

A.ग्रीस
A.Greece
A.گریس کی

B.लिबिया
B.Libya
B.لیبیا کی

	C.जॉर्डन C.Jordan C.جارڈن کی
	D.यांपैकी कोणतेही नाही D.None of these D.ان میں سے کوئی نہیں
Answer:	D.यांपैकी कोणतेही नाही D.None of these D.ان میں سے کوئی نہیں

195 सूचना: काही विधाने आणि त्यानंतर चार निष्कर्ष, I, II, III आणि IV दिले आहेत. ही विधाने सामान्यतः ज्ञात वस्तुस्थितीपेक्षा भिन्न असली तरी सत्य आहेत असे समजा. दिलेल्यापैकी कोणता निष्कर्ष दिलेल्या विधानांवरुन नक्की काढता येऊ शकतो हे तुम्ही ठरवायचे आहे.तुमचे उत्तर सूचित करा.
विधाने:
(a) सर्व पुस्तकं बॉक्सेस आहेत.
(b) सर्व बॉक्सेस पेन्स आहेत.
(c) सर्व पेन्स कागद आहेत.
निष्कर्ष:
I. काही कागद पुस्तकं आहेत.
II. सर्व पुस्तकं कागद आहेत.
III. काही पेन्स पुस्तकं आहेत.
IV. सर्व बॉक्सेस पुस्तकं आहेत.

DIRECTION: Some statements are given following by four conclusions, I, II, III and IV. You have to consider that statements to be true, even if they seem to be at variance from commonly known facts. You are to decide which of the given conclusions can definitely be drawn from the given statements. Indicate your answer.

Statements:
(a) All books are boxes.
(b) All boxes are pens.
(c) All pens are papers.

Conclusion:
I. Some paper are books.
II. All books are papers.
III. Some pens are books.
IV. All boxes are books.

ہدایات: کچھ سٹیٹمنٹ جوکہ چار خلاصوں پر مشتمل ہیں .I،II، III اور IV. اگرچہ دکہنے میں وہ بہت .اپ کو وہ سٹیٹمنٹ درست ماننا ہے، سارے حقاٰق ست مطبقت رکہتی ہو۔ اپ کو دیے گے خلاصوں میں سے یقینی طور پر اسے اختیار کرنا ہے جو سٹیٹمنٹ سے نکلا ہو. اپنا جواب تلاش کرے

اظہار بیان:
تمام کتابیں صندوق ہیں
تمام صندوق پن ہیں
تمام پن پیپر ہیں

نتائج:
Iتمام پیپر کتابیں ہیں۔
IIتمام کتابیں پیپر ہیں۔
IIIکچہ پن کتابیں ہیں۔
IVتمام صندوق کتابیں ہیں۔

A.केवळ निष्कर्ष I आणि III निष्कर्ष निघेल
A.Only conclusion I and III follow
A.I اور III درست ہے

For More Info And Videos About TAIT-Exam Syllabus And Other Exam Visit My Channel
TAIT च्या 30 प्रश्नपत्रिका PDF
BADSHAHimp Available Request 9765226781
WWW.YouTube.com/BADSHAHimp
Subscribe My Channel

B.एकतरनिष्कर्ष II किंवा IV
B.Either conclusion II or IV
B.II یا IV درست ہے

C.केवळ निष्कर्ष I, II आणि III निष्कर्ष निघेल
C.Only conclusion I, II and III follow
C.صرف II، I اورIII درست ہے

D.एकतर निष्कर्ष I किंवा IIकिंवा III निष्कर्ष निघेल
D.Either conclusion I or II or III follows
D.I یا II یا III درست ہے

Answer: C.केवळ निष्कर्ष I, II आणि III निष्कर्ष निघेल
C.Only conclusion I, II and III follow
C.صرف II، I اورIII درست ہے

196 'ENIGMATIC' या शब्दामध्ये अक्षरांच्या किती जोड्या आहेत, ज्यापैकी प्रत्येकीमध्ये वर्णमालेप्रमाणे शब्दामधील खूप अक्षरे आहेत?

How many pairs of letters are there in the word 'ENIGMATIC' each of which has as many letters between them in the word as in the alphabet?

کلومیٹر

A.एकही नाही
A.None
A.None

B.एक
B.One
B.One

C.दोन
C.Two
C.Two

D.तीन
D.Three
D.Three

Answer: B.एक
B.One
B.One

For More Info And Videos About TAIT-Exam Syllabus And Other Exam Visit My Channel
BADSHAHimp TAIT च्या 30 प्रश्नपत्रिका PDF Available Request 9765226781 WWW.YouTube.com/BADSHAHimp Subscribe My Channel

197	Choose the word which is most similar in meaning to the given word. VIGILANT
	A.Watchful
	B.Negligent
	C.Inattentive
	D.Incautious
Answer:	A.Watchful

198	निर्देश: खालील शब्दांची तार्किक क्रमाने मांडणी करा: 1. उत्पन्न 2. दर्जा 3. शिक्षण 4. कल्याण 5. नोकरी DIRECTIONS: Arrange the following in a logical order: 1. Income 2. Status 3. Education 4. Well being 5. Job ہدایات: ایک منطقی ترتیب میں مندرجہ ذیل کو مرتب کریں۔ 1. آمدنی 2. حیثیت 3. تعلیم 4. خیر 5. نوکری
	A.1, 2, 5, 3, 4 A.1, 2, 5, 3, 4 A.1, 2, 5, 3, 4
	B.1, 3, 2, 5, 4 B.1, 3, 2, 5, 4 B.1, 3, 2, 5, 4

For More Info And Videos About TAIT-Exam Syllabus And Other Exam Visit My Channel
TAIT च्या 30 प्रश्नपत्रिका PDF
BADSHAHimp Available Request 9765226781
WWW.YouTube.com/BADSHAHimp
Subscribe My Channel

C.3, 1, 5, 2, 4
C.3, 1, 5, 2, 4
C.3, 1, 5, 2, 4

D.3, 5, 1, 2, 4
D.3, 5, 1, 2, 4
D.3, 5, 1, 2, 4

Answer: D.3, 5, 1, 2, 4
D.3, 5, 1, 2, 4
D.3, 5, 1, 2, 4

199 **सूचना:** दिलेल्या पर्यायांमधून श्रेणी पूर्ण करणारी योग्य आकृती निवडा.

DIRECTIONS: Complete the series by choosing right figure from the given choices.

ہدایات: دیئے گئے اختیارات میں سے صحیح شکل کو چن کر سیریز کو مکمل کیجیئے

प्रश्न आकृत्या
Question Figures
سوالی شکل

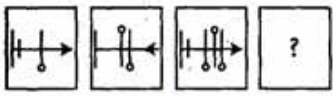

उत्तरासाठी पर्यायी आकृत्या
Answer Figures
جوابی شکل

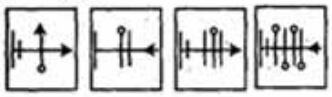

A. (A)

B. (B)

C. (C)

D. (D)

Answer: D. (D)

200 एक उत्कृष्ट संप्रेषणामध्ये, हे अपेक्षित नाही.

In an excellent communication, it is not desired—

ایک بہترین مواصلات میں، یہ مطلوب نہیں ہے—

For More Info And Videos About TAIT-Exam Syllabus And Other Exam Visit My Channel
TAIT च्या 30 प्रश्नपत्रिका PDF
BADSHAHimp Available Request 9765226781
WWW.YouTube.com/BADSHAHimp
Subscribe My Channel

A.आवाजात बदल (व्हॉइस मोड्यूलेशन)
A.Change in voice (voice modulation)
A. آواز میں تبدیلی (آواز کا الاپ)

B.बाह्य किंवा शारीरिक सौंदर्य
B.External or physical beauty
B. باہری یا جسمانی خوبصورتی

C.भावनांचे पर्याप्त संप्रेषण
C.Communication of adequate feelings
C. کافی احساسات کی ترسیل

D.विद्यार्थ्यांचा सहभाग
D.Involvement of students
D. طلبا کی شمولیت

Answer:

B.बाह्य किंवा शारीरिक सौंदर्य
B.External or physical beauty
B. باہری یا جسمانی خوبصورتی

For More Info And Videos About TAIT-Exam Syllabus And Other Exam Visit My Channel
TAIT च्या 30 प्रश्नपत्रिका PDF
BADSHAHimp Available Request 9765226781
WWW.YouTube.com/BADSHAHimp
Subscribe My Channel

Question Paper Title : TAIT_PAPER_7

Date of Exam : 2017-12-15 12:30:00.0

1	केलेले उपकार जाणणारा -
	A.जाणकार
	B.कृतज्ञ
	C.कृतघ्न
	D.कर्जदार
Answer:	B.कृतज्ञ

2	Fill in the blank with the correct article. _____Wisdom is the gift of heaven.
	A.A
	B.An
	C.The
	D.No article required
Answer:	D.No article required

3	‘कृपा’ या शब्दाचा विरुद्धार्थी शब्द कोणता ?
	A.अवकृपा
	B.दया
	C.माया
	D.मर्जी
Answer:	A.अवकृपा

4	प्रभावी संप्रेषणात ह्याची गरज नाही In an effective communication there is no need of— ایک مؤثر مواصلات میں — کی کوئی ضرورت نہیں ہوتی ہے
	A.आवाज आणि भाषणातील स्वरनियमन A.Modulations in voice and speech A.آواز اور گفتار کے اتار چڑھاؤ
	B.पुरेसा हावभाव B.Adequate gestures B. مناسب اشارے
	C.विषयावर प्रभुत्व C.Mastery over the content C. مواد پر عبور
	D.सुंदर व्यक्तिमत्व D.Handsome personality D. خوبصورت شخصیت
Answer:	D.सुंदर व्यक्तिमत्व D.Handsome personality D. خوبصورت شخصیت

For More Info And Videos About TAIT-Exam Syllabus And Other Exam Visit My Channel
BADSHAHimp SubScribe Like & Share WWW.YouTube/BADSHAHimp

5 सूचना: प्रत्येक प्रश्नाला एक प्रमुख विधानासोबत चार विधाने आहेत ज्यांच्याखाली A, B, C, आणि D असे चार विधान आहेत. क्रमवार विधानांची जोडी निवडा ज्यामध्ये प्रथम विधान दुसऱ्या विधानाला सुचवते, आणि दोन्ही विधाने तर्किकदृष्ट्या प्रमुख विधानासोबत निगडित असेल.

जेव्हा मी संगणकावर टाइप करतो, तेव्हा मी कोणतीही चूक करीत नाही
A. मी संगणकावर टाइप केले
B. मी संगणकावर टाइप केले नाही
C. मी कोणतीही चूक करीत नाही
D. मी चुका केल्या

DIRECTIONS: Each question has a main statement followed by four statements labelled A, B, C and D. Choose the ordered pair of statements, where the first statement implies the second, and the two statements are logically consistent with the main statement.

When I type on computer , I don't make any mistake
A. I typed on computer
B. I did not type on computer
C. I don't make any mistake
D. I made mistakes

ہدایت: ہر سوال میں ایک جملہ ہے جسکے بعد چار جملےاے، بی،سی اور ڈی کے نام سے دئے گئے ہیں اسمیں منسلک جوڑیوں کو چنئے۔ جہاں پہلا جملہ دوسرے جملہ کی اور اشارہ کر رہا ہے اور دو جملے منطقی مرکزی بیان کے مطابق ہیں

میں کمپیوٹر پر ٹائپ کرتا ہوں تو کوئی غلطی نہیں کرتا
Aمیں نے کمپیوٹر پر ٹائپ کیا ۔
Bمیں نے کمپیوٹر پر ٹائپ نہیں کیا ۔
Cمیں نے کوئی غلطی نہیں کی ۔
Dمیں نے غلطیاں کیں ۔

A.AC
A.AC
A.AC

B.BA
B.BA
B.BA

C.DA
C.DA
C.DA

D.CD
D.CD
D.CD

For More Info And Videos About TAIT-Exam Syllabus And Other Exam Visit My Channel
BADSHAHimp SubScribe Like & Share YouTube WWW.YouTube/BADSHAHimp

Answer: A.AC
A.AC
A.AC

6 जर महिन्याचा 27 वा दिवस शुक्रवार आहे, तर त्या महिन्याच्या 4 तारेखेला खालीलपैकी कोणता वार असेल?

If the 27th day of a month is Friday, which of the following will be the 4th day of that month?

اگر کسی مہینہ کا 27 واں دن جمعہ ہو، تو نیچے لکھے ہوئے دنوں میں سے کس دن اس مہینہ کا چوتھا دن ہوگا؟

A.रविवार
A.Sunday
A.اتوار

B.शनिवार
B.Saturday
B.سنیچر

C.बुधवार
C.Wednesday
C.بدھ

D.शुक्रवार
D.Friday
D.جمعہ

Answer: C.बुधवार
C.Wednesday
C.بدھ

For More Info And Videos About TAIT-Exam Syllabus And Other Exam Visit My Channel
BADSHAHimp SubScribe Like & Share YouTube WWW.YouTube/BADSHAHimp

7 सूचना: दोन विधाने आणि त्यानंतर चार निष्कर्ष, I, II, III आणि IV दिले आहेत. ही विधाने सामान्यतः ज्ञात वस्तुस्थितीपेक्षा भिन्न असली तरी सत्य आहेत असे समजा. दिलेल्यापैकी कोणता निष्कर्ष दिलेल्या विधानांवरुन नक्की काढता येऊ शकतो हे तुम्ही ठरवायचे आहे.तुमचे उत्तर सूचित करा.
विधाने:
(a) काही स्कर्ट्स बेंचेस आहेत.
(b) एकही बेंच टेबल नाही.
निष्कर्ष:
I. काही स्कर्ट्स टेबल्स आहेत.
II. काही बेंचेस स्कर्ट्स आहेत.
III. सर्व बेंचेस स्कर्ट्स आहेत.
IV. काही टेबल्स स्कर्ट्स आहेत.

DIRECTION: Two statements are given following by four conclusions, I, II, III and IV. You have to consider that statements to be true, even if they seem to be at variance from commonly known facts. You are to decide which of the given conclusions can definitely be drawn from the given statements. Indicate your answer.

Statements:
(a) Some skirts are benches.
(b) No bench is a table.

Conclusion:
I. Some skirts are tables.
II. Some benches are skirts.
III. All benches are skirts.
IV. Some tables are skirts.

ہدایات: دو سٹیٹمنٹ جوکہ چار خلاصوں پر مشتمل ہیں .I،II، III اور IV. اگرچہ دکھنے میں وہ بہت .اپ کو وہ سٹیٹمنٹ درست ماننا ہے، سارے حقاٰق ست مطبقت رکہتی ہو۔ اپ کو دیے گے خلاصوں میں سے یقینی طور پر اسے اختیار کرنا ہے جو سٹیٹمنٹ سے نکلا ہو. اپنا جواب تلاش کرے

اظہار بیان:
کچہ سایے بنچ ہیں
کوی بنچ ٹیبل نہیں ہے

نتائج:
I۔کچہ سایے ٹیبل ہیں
II۔کچہ بنچ سایے ہیں
III۔تمام بنچ سایے ہیں
IV۔کچہ ٹیبل سایے ہیں

A.केवळ I निष्कर्ष निघेल
A.Only I follows
A.صرف I درست ہے

B.केवळ II निष्कर्ष निघेल
B.Only II follows
B.صرف II درست ہے

C.केवळ II आणि IV निष्कर्ष निघेल
C.Only II and IV follow
C.صرف II اور IV درست ہے

D.केवळ I आणि III निष्कर्ष निघेल
D.Only I and III follow
D.صرف I اورIII درست ہے

Answer: B.केवळ II निष्कर्ष निघेल
B.Only II follows
B.صرف II درست ہے

8 टक्केवारी म्हणजे:

Percentile is

فی صد ہے

A. शंभरापैकी प्राप्तांक
A.Score attained out of hundred
A.اسکور سو سے زائد ہے

B.हजारपैकी प्राप्तांक
B.Score attained out of thousand
B. اسکور ہزار سے زائد ہے

C.शंभरावर वैयक्तिक स्थान
C.Position of the individual among hundred
C.سو کے درمیان فرد کی حیثیت

D.यापैकी एकही नाही
D.None of these
D.ان میں سے کوئی بھی نہیں

Answer: C.शंभरावर वैयक्तिक स्थान
C.Position of the individual among hundred
C.سو کے درمیان فرد کی حیثیت

9 सूचना: दिलेल्या पर्यायांमधून वेगळे ते बाहेर काढा.

DIRECTIONS: Find the odd one out from the given alternatives.

سمت: دیے گئے متبادل میں سے بے جوڑ کو تلاش کرو۔

For More Info And Videos About TAIT-Exam Syllabus And Other Exam Visit My Channel
BADSHAHimp SubScribe Like & Share YouTube WWW.YouTube/BADSHAHimp

A.343
A.343
A.343

B.121
B.121
B.121

C.1331
C.1331
C.1331

D.2197
D.2197
D.2197

Answer: B.121
B.121
B.121

10 निर्देश: मालिका पूर्ण करा

F, K, ?, R, T

DIRECTION: Complete the series

F, K, ?, R, T

ہدایت اس سرج کو مکمّل کرو

F, K, ?, R, T

A.Q
A.Q
A.Q

B.M
B.M
B.M

C.O
C.O
C.O

D.N
D.N
D.N

For More Info And Videos About TAIT-Exam Syllabus And Other Exam Visit My Channel
BADSHAHimp SubScribe Like & Share WWW.YouTube/BADSHAHimp

Answer:	C.O C.O C.O

11	**सूचना**: दिलेल्या पर्यायांमधून श्रेणी पूर्ण करणारी योग्य आकृती निवडा. **DIRECTIONS:** Complete the series by choosing right figure from the given choices. ہدایات: دیئے گئے اختیارات میں صحیح شکل کا انتخاب کر کے سیریز کو مکمل کیجیئے۔ **Problem Figures**  1 2 3 4 **Answer Figures** 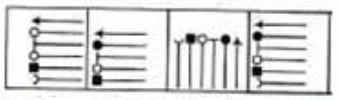 (A) (B) (C) (D)
	A. (A)
	B. (B)
	C. (C)
	D. (D)
Answer:	D. (D)

12	नैराश्य यासह येतो Depression comes along ڈپریشن اس کے ساتھ آتی
	A.गरिबी A.Poverty A.غربت
	B.मोठे अपघात B.Major accident B.بڑا حادثہ
	C.दीर्घकालीन स्थिरता C.Prolonged stillness C.طویل بیماری

D.प्रिय व्यक्तीचा मृत्यू
D.Death of loved one
D.کسی چہیتے کی موت پر

Answer:

B.मोठे अपघात
B.Major accident
B.بڑا حادثہ

13 फोटोतील एका पुरुषाकडे बोट दाखवून एक स्त्री म्हणतेः “ते माझ्या एकुलत्या सुनेच्या सासऱ्यांचे वडील आहेत” मग त्या पुरुषाचे त्या स्त्रीसोबत नाते काय?

Pointing to a man in a photograph a woman says: “He is the father of my only daughter-in-law's father in law ”. What is the man to the woman?

تصویر میں ایک آدمی کی طرف اشارہ کرکے عورت نے کہا: " یے میری واحد بہو کے سسر کا باپ ہے." تو آدمی عورت کا کیا لگتا ہے؟

A.वडील
A.Father
A.باپ

B.भाऊ
B.Brother
B.بھائی

C.पती
C.Husband
C.شوہر

D.यापैकी एकही नाही
D.None of these
D.ان میں سے کوئی نہیں

Answer: D.यापैकी एकही नाही
D.None of these
D.ان میں سے کوئی نہیں

For More Info And Videos About TAIT-Exam Syllabus And Other Exam Visit My Channel
BADSHAHimp SubScribe Like & Share YouTube WWW.YouTube/BADSHAHimp

14 सूचना: प्रत्येक प्रश्नाला एक प्रमुख विधानासोबत चार विधाने आहेत ज्यांच्याखाली A, B, C, आणि D असे चार विधान आहेत. क्रमवार विधानांची जोडी निवडा ज्यामध्ये प्रथम विधान दुसऱ्या विधानाला सुचवते, आणि दोन्ही विधाने तर्किकदृष्ट्या प्रमुख विधानासोबत निगडित असेल.

पैसा चांगला किंवा वाईट असतो.
A. पैसा चांगला असतो.
B. पैसा चांगला नसतो.
C. पैसा वाईट असतो.
D. पैसा वाईट नसतो.

DIRECTIONS: Each question has a main statement followed by four statements labelled A, B, C and D. Choose the ordered pair of statements, where the first statement implies the second, and the two statements are logically consistent with the main statement.

The money is either good or bad
A.The money is good
B.The money is not good
C.The money is bad
D.The money is not bad

ہدایت: ہر سوال میں ایک جملہ ہے جسکے بعد چار جملےاے، بی،سی اور ڈی کے نام سے دئے گئے ہیں اسمیں منسلک جوڑیوں کو چنئے۔ جہاں پہلا جملہ دوسرے جملہ کی اور اشارہ کر رہا ہے اور دو جملے منطقی مرکزی بیان کے مطابق ہیں

پیسہ یا تو اچھا ہے یا برا
A۔ پیسہ اچھا ہے
B۔ پیسہ اچھا نہیں ہے
C۔ پیسہ برا ہے
D۔ پیسہ برا نہیں ہے

A.AC
A.AC
A.AC

B.DA
B.DA
B.DA

C.CB
C.CB
C.CB

D.AB
D.AB
D.AB

For More Info And Videos About TAIT-Exam Syllabus And Other Exam Visit My Channel
BADSHAHimp SubScribe Like & Share YouTube WWW.YouTube/BADSHAHimp

Answer: B.DA
B.DA
B.DA

15 आरोग्य शिक्षण हे—ला समानार्थक शब्द आहे

Health education is synonymous with—

صحت کی تعلیم --- کے مترادف ہے-

A.स्वच्छता
A.Hygiene
A. حفظان صحت

B.शरीरविज्ञानशास्त्र
B.Physiology
B. نفسیات

C.आरोग्य प्रचार
C.Health propaganda
C. صحت کا پروپیگنڈا

D.वरीलपैकी कोणतेही नाही
D.None of the above
D.اوپر سے کوئی بھی نہیں

Answer: D.वरीलपैकी कोणतेही नाही
D.None of the above
D.اوپر سے کوئی بھی نہیں

16 **सूचना**: दिलेल्या पर्यायांमधून श्रेणी पूर्ण करणारी योग्य आकृती निवडा.

DIRECTIONS: Complete the series by choosing right figure from the given choices.

ہدایات: دیئے گئے اختیارات میں سے صحیح شکل کو چن کر سلسلہ کو مکمل کیجیئے

Problem Figures

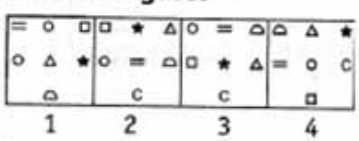

Answer Figures

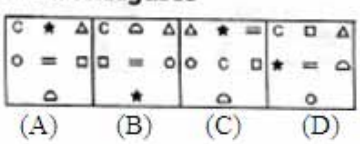

A. (A)

B. (B)

C. (C)

D. (D)

Answer: A. (A)

17 $\left(\frac{4 \times 4 - 4 \times 5 + 5 \times 5}{4 \times 4 \times 4 + 5 \times 5 \times 5}\right) = ?$

A. 5/189

B. 12/189

C. 16/189

D. 21/189

Answer: D. 21/189

18 एक व्यक्ती न थांबता विशिष्ट अंतर 60 किमी/तास या गतीने कापतो आणि थांबून थांबून ती व्यक्ती तेच अंतर 40 किमी/तास या गतीने पूर्ण करते. तो किती मिनिटे/तास थांबला?

A person covers certain distance at a speed of 60 km/hr without stoppage and with stoppages he travels the same distance at a speed of 40 km/hr. How many minutes/hour does he stop?

ایک شخص بغیر رکے 60 کلو میٹر / گھنٹہ کی رفتار سے ایک مخصوص فاصلہ طے کرتا ہے اور رکتے ہوئے وہی فاصلہ 40 کلومیٹر / گھنٹے کی رفتار سے طے کرتا ہے۔ وہ کتنے منٹ / گھنٹہ رکتا ہے؟

A.30 मिनिट
A.30 minute
A.30 منٹ

B.26 मिनिट
B.26 minute
B.26 منٹ

C.20 मिनिट
C.20 minute
C.20 منٹ

D.35 मिनिट
D.35 minute
D.35 منٹ

Answer: C.20 मिनिट
C.20 minute
C.20 منٹ

19 **सूचना**: आकृती(X)मध्ये दिलेल्या आकारांचा वापर करून (A), (B), (C), (Dया आकारांमधील कोणता आकार तयार करता येईल?

DIRECTIONS: Find out which of the figure (A), (B), (C), (D) can be formed from the pieces given in fig. (X).

ہدایات: (x) شکل میں جو ٹکڑے دیئے گئے ہیں ان سے (A), (B), (C), (D) ان میں سے کونسی شکلیں بن سکتی ہیں دریافت کریں۔

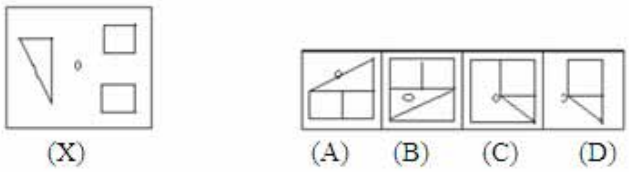

A. (A)

B. (B)

C. (C)

D. (D)

Answer: A. (A)

20 सूचना: खालील प्रश्नांमध्ये दिलेल्या पर्यायांमधून संबंधित अक्षर समूह निवडा.

UDBS : USBD : : PEAX:?

DIRECTIONS: In the following question, select the related group of letters from the given alternatives.

UDBS : USBD : : PEAX:?

سمت: مندرجہ ذیل سوال میں، دیے گئے متبادل میں سے حروف کا متعلقہ گروپ منتخب کریں۔

UDBS : USBD : : PEAX:?

A.PXEA
A.PXEA
A.PXEA

B.PXAE
B.PXAE
B.PXAE

C.PEXA
C.PEXA
C.PEXA

D.PAEX
D.PAEX
D.PAEX

Answer: B.PXAE
B.PXAE
B.PXAE

21 दोन भावांच्या वर्तमान वयांचे गुणोत्तर 1:2 आहे आणि 10 वर्षांपूर्वी हे गुणोत्तर 1:3 होते. 5 वर्षांनंतर त्यांच्या वयाचे गुणोत्तर काय असेल?

The ratio of the present ages of two brother is 1 : 2 and 10 years ago the ratio was 1 : 3. What will be the ratio of their ages after 5 years?

بھائیوں کی موجودہ عمر کا تناسب 2:1 ہے اور 10 سال پہلے یہ تناسب 3:1 تھا۔5 سال بعد اُن کی عمرو ں کا تناسب کیا ہو گا؟ 2

A.1:4
A.1:4
A.4:1

B.2:3
B.2:3
B.3:2

C.3:5
C.3:5
C.5:3

D.5:9
D.5:9
D.9:5

Answer: D.5:9
D.5:9
D.9:5

22	DIRECTIONS: A sentence with an underlined word is given below. Find the word which is opposite in meaning to the underlined word from the given options. The government is being widely criticized in the media for failing to limit air pollution.
	A.Praised
	B.Condemned
	C.Blamed
	D.Attacked
Answer:	A.Praised

23 सूचना : खालील दिलेल्या प्रश्नामध्ये काही विधाने आणि काही निष्कर्ष आहेत. सामन्यात: ज्ञात तथ्यांपेक्षा ते वेगळे असतील तर दिलेली विधाने तुम्हाला सत्य मानवी लागतील आणि त्यानंतर दिलेल्या विधानाचे अनुकरण दिलेल्यापैकी कोणता निष्कर्ष तार्किकदृष्ट्या करतो ते ठरवा.

विधाने :
Z > P, P < M, M < J
निष्कर्ष :
I. P < J
II. J < Z

DIRECTIONS: In the question given below, there are few statements followed by few conclusions. You have to take the given statements to be true even if they seem to be at variance with commonly known facts and then decide which of the given conclusion logically follow(s) from the given statements.

Statements:
Z > P, P < M, M < J
Conclusions:
I. P < J
II. J < Z

ہدایات: مندرجہ ذیل سوال میں، کچھ بیانات کے بعد کچھ نتائج موجود ہیں. اگر آپ کو عام طور پر جانے جاتے حقائق کے ساتھ بھی متغیر ہونے لگے تو بھی آپ دئے گئے بیانات دماغ میں رکھیں اور پھر اس بات کا فیصلہ کریں کہ ذیل میں دیا گیا کونسا نتیجہ منطقانہ طور پر دیے گئے بیانات کی پیروی کرتا ہے.

بیانات:
Z > P, P < M, M < J
نتائج:
P < J .I
J < Z .II

A.तर फक्त I निष्कर्ष अनुकरण करतो
A.If only Conclusion I follows
A.اگر I اور II نتائج میں سے کوئی بھی پیروی نہ کرے

B.तर फक्त II निष्कर्ष अनुकरण करतो
B.If only Conclusion II follows
B.اگر I اور II نتائج میں سے ایک پیروی کرے

C.तर I किंवा II यापैकी एक निष्कर्ष अनुकरण करतो
C.If either Conclusion I or II follows
C.اگر صرف نتیجہ II پیروی کرتا ہے

D.तर I व II हे दोन्हीही निष्कर्ष अनुकरण करीत नाहीत
D.If neither Conclusion I nor II follows
D.اگر صرف نتیجہ I پیروی کرتا ہے

Answer: A.तर फक्त I निष्कर्ष अनुकरण करतो
A.If only Conclusion I follows
A.اگر I اور II نتائج میں سے کوئی بھی پیروی نہ کرے

24 A sentence with an underlined idiomatic expression is given. What is the meaning of the idiomatic expression 'Donkey's year' in the sentence given below?
She's been in the same job for donkey's years.

A.A very long time

B.A very short period of time

C.A time spent in natural surroundings

D.None of the above

Answer: A.A very long time

25 जर नाणे n वेळा फेकले, तर संभाव्य परिणामांची एकूण संख्या असते

If a coin is tossed n times, then the total number of possible outcomes is

اگر ایک سکہ n بار اچھالا جائے تو ممکنہ نتائج کا مجموعہ ہے

A.2^{n+1}
A.2^{n+1}
A.2^{n+1}

B.2^{n-1}
B.2^{n-1}
B.2^{n-1}

C.2^{n}
C.2^{n}
C.2^{n}

D.2^{2n}
D.2^{2n}
D.2^{2n}

Answer: C.2^{n}
C.2^{n}
C.2^{n}

26 मानसशास्त्रीय चाचणी ज्यामध्ये वैयक्तिक फरक केवळ कार्यक्षमतेच्या वेगावर अवलंबून असतो.

Psychological test in which individual difference depends solely on speed of performance

وہ نفسیاتی ٹسٹ جس میں انفرادی اختلاف ، مجردا پرفارمنس کی رفتار پر منحصر ہوتے ہیں:

A.मानक चाचणी
A.Standard test
A.اسٹینڈرڈ ٹسٹ

B.सामर्थ्याची चाचणी
B.Power test
B.پاور(طاقت) ٹسٹ

C.तोंडी चाचणी
C.Verbal test
C.زبانی ٹسٹ

D.वेगाची चाचणी
D.Speed test
D.رفتار ٹسٹ

Answer: D.वेगाची चाचणी
D.Speed test
D.رفتار ٹسٹ

27 Out of the four alternatives, choose the one which can be substituted for the given words/sentence.
The crime of intentionally starting a fire in order to damage or destroy something, especially a building

A.Arson

B.Extinguish

C.Facade

D.Bargain

Answer: A.Arson

28 Choose the word which is opposite in meaning to the given word.
ENMITY

A.Affection

	B.Hostility
	C.Antagonism
	D.Rivalry
Answer:	A.Affection

29	अणुऊर्जा भट्टी या तत्वावर कार्य करते- Nuclear Power Reactor act on the Principle of— جوہری توانائی تنصیبات کے کس اصول کے تحت چلتی ہے—
	A.द्विखंडन A.Fission A.انشقاق
	B.एकीकरण B.Fusion B.گلاوٹ
	C.थर्मल हीटिंग C.Thermal Heating C.تھرمل کی تپش
	D.वरील सर्व तिन्हींचे एकत्रित प्रभाव D.Combined Effect of all three given above D.درج بالا سبھی کے مرکب اثرات
Answer:	A.द्विखंडन A.Fission A.انشقاق

30	‘माझ्या भावाचे कापड-दुकान आहे.’ या वाक्यातील विशेषण ओळखा.
	A.माझ्या
	B.भावाचे
	C.कापड
	D.दुकान

Answer: C.कापड

31 सूचना: दिलेल्या पर्यायांमधून वेगळे ते बाहेर काढा.

DIRECTIONS: Find the odd one out from the given alternatives.

سمت: دیے گئے متبادل میں سے بے جوڑ کو تلاش کرو۔

A.शंभर
A.HUNDRED
A.سو

B.हजार
B.THOUSAND
B.ہزار

C.दहा
C.TEN
C.دس

D.पंचवीस
D.TWENTY FIVE
D.پچیس

Answer: D.पंचवीस
D.TWENTY FIVE
D.پچیس

32 उपक्रम पद्धतीमध्ये — वर जोर दिला जातो

In project method emphasis is laid down on—

منصوبے کے طریقہ کار مین --- پر زور دیا گیا ہے۔

A.स्वतः करून शिकणे
A.Learning by doing
A.کر کے سیکھنا

B.स्वतः जगून शिकणे
B.Learning by living
B.زندگی سے سیکھنا

C.सहकार्य आणि स्पर्धेद्वारे शिकणे
C.Learning by cooperation and competition
C.تعاون اور مقابلہ کے ذریعہ سیکھنا

D.वरील सर्व
D.All the above
D.مذکورہ تمام

Answer: D.वरील सर्व
D.All the above
D.مذکورہ تمام

33 **सूचना**: खालील प्रश्नात कागदाच्या एक तुकड्याला प्रश्नातील आकृतीत दाखविल्याप्रमाणे घडी घातली आहे. उत्तरादाखल पर्यायांमधून अशी आकृती निवडा जी भोक पडल्यानंतर उलगडलेल्या कागदाचे स्वरूप दाखवेल.

DIRECTIONS: In the following question a piece of paper is folded in the manner shown in the question figure(s). Select the figure out of the answer choices showing the unfolded pattern after the punches (cut).

ہدایات: نیچے دیئے گئے سوالوں میں کاغذ کا ایک ٹکڑا اس طرح جوڑا گیا ہے جیسے سوال کی شکل میں بتایا گیا ہے، دیئے گئے جوابات کے اختیارات میں سے اس طرح انتخاب کیجیئے کہ کٹ لگانے کے بعد بغیر جوڑا ہوا پیٹرن دکھائی دے۔

Question Figures

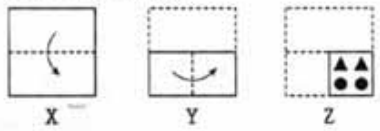

Answer Figures

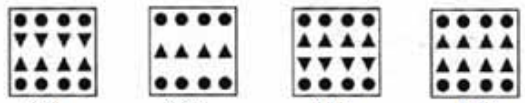

A. (A)

B. (B)

C. (C)

D. (D)

Answer: A. (A)

34 सूचना: दिलेल्या पर्यायांमधून वेगळे ते बाहेर काढा.

DIRECTIONS: Find the odd one out from the given alternatives.

سمت: دیے گئے متبادل میں سے بے جوڑ کو تلاش کرو۔

A.पार्ट
A.Part
A.پارٹ

B.ट्रॅप
B.Trap
B.ٹریپ

C.कार्ट
C.Cart
C.کارٹ

D.डार्ट
D.Dart
D.ڈارٹ

Answer: B.ट्रॅप
B.Trap
B.ٹریپ

35 खालीलपैकी कोणते वातावरणातील पावसाचे एक उदाहरण नाही?

Which of the following is not an example of precipitation happening in atmosphere?

مندرجہ ذیل میں سے کون کرہ ارض میں ترسیب ہونے کی ایک مثال نہیں ہے؟

A.पाऊस
A.Rain
A.بارش

B.बर्फ
B.Snow
B.برف

C.गारा
C.Hail
C.اولا

D.चिखल
D.Mud
D.کیچڑ

Answer: D.चिखल
D.Mud
D.کیچڑ

36 Choose the word which is most similar in meaning to the given word.
DUBIOUS

A.Doubtful

B.Certain

C.Definite

D.Sure

Answer: A.Doubtful

37 एक मुलगा पूर्वेला 20 मी. धावतो आणि उजवीकडे वळून 10 मी. धावतो आणि उजवीकडे वळून 10 मी. धावतो आणि पुन्हा डावीकडे वळून 5 मी. धावतो आणि नंतर डावीकडे वळून 12 मी. धावतो आणि शेवटी डावीकडे वळतो आणि 5 मी. धावतो. आता मुलाचे तोंड कोणत्या दिशेला आहे?

A boy runs 20m towards East and then turns to right and runs 10m, then turns to left and run 5m and again turns to left and runs 12m, then finally turns to left and runs 5m. Now which direction is boy facing?

ایک لڑکا 20 منٹ تک مشرق کی طرف دوڑتا ہے اورداہنی جانب مڑ کر 10 منٹ تک دوڑتا ہے اور پھر سے بائیں جانب مڑ کر 10 منٹ تک دوڑتا ہے اسکے بعد بائیں سمت مڑ کر 5 منٹ تک دوڑتا ہے اور پھر بائیں جانب مڑ کر 12 منٹ دوڑتا ہے- بالآخر بائیں جانب مڑتا ہے اور 5 منٹ دوڑتا ہے- بلآخر اب لڑکا کس سمت میں چل رہا ہے؟

A.दक्षिण
A.South
A.جنوب

B.उत्तर
B.North
B.شمال

C.पूर्व
C.East
C.مشرق

D.पश्चिम
D.West
D.مغرب

Answer: D.पश्चिम
D.West
D.مغرب

38 यापैकी कोणती आकृती बल्ब, लँप आणि लाईट यांच्यातील संबंध उत्तमरित्या दर्शवते?

Which of the following diagrams indicates the best relation between Bulb, Lamp and Light ?

مندرجہ ذیل ڈایاگراموں میں سے کون سی بلب، چراغ اور روشنی کے درمیان بہترین رشتہ ظاہر کرتی ہے؟

(A) 

(B) 

(C) 

(D) 

Answer: (C) 

39 _____ यामुळे विकार होतात आणि त्यांना विकार देणारे अभिकर्ते म्हणतात.

_____ cause disease and are known as disease causing agents.

_____ کی وجہ سے بیماری ہوتی ہے اور اسے بیماری پیدا کرنے والے ایجنٹ کی حیثیت سے جانا جاتا ہے۔

A.पांढऱ्या पेशी
A.Leucocytes
A.لیو سائٹس

B.प्रतिजन
B.Antigens
B. اینٹی جینس

C.प्रतिद्रव्य
C.Anhbodies
C.اینٹی باڈیز

D.रोगाणू
D.Pathogens
D. پیتھو جینس

Answer: D.रोगाणू
D.Pathogens
D. پیتھو جینس

40

एका घनाकृतीच्या तीन अवस्था दाखविल्या आहेत. त्यांवर अवलंबून हे शोधून काढा की दिलेल्या घनाकृतीमध्ये 4 या अंकाच्या विरुद्ध बाजूला कोणता अंक असेल?

Three positions of a cube are given. Based on them, find out, which number is found opposite number 4 in a given cube?

ہدایات: ایک کیوب کی تین حالتیں دی گئی ہیں۔ ان کی بنیاد پر، دریافت کیجیئے، کونسا نمبرکیوب میں دیئے گئے 4 نمبر کی اپوسٹ ہے ؟



A. 3

B. 5

C. 1

D. 6

Answer: D. 6

41

पियाजेटने _____टप्प्यांची शिफारस केली

Piaget recommended ____ stages of

پیگیٹ نے_____ مراحل کی تجویز رکھی ہے

A.सात टप्पे
A.Seven stages
A.سات مراحل

B.सहा टप्पे
B.Six stages
B.چھہ مراحل

C.चार टप्पे
C.Four stages
C.چار مراحل

D.दोन टप्पे
D.Two stages
D.دو مراحل

Answer: C.चार टप्पे
C.Four stages
C.چار مراحل

42 सूचना: खालील माहिती काळजीपूर्वक वाचा आणि खालील प्रश्नांची उत्तरे द्या:
P, Q, R, S, T, U, V आणि W टेबलभोवती मध्यभागी तोंड करून बसले आहेत. T हा P च्या डावीकडून दुसरा आणि V च्या उजवीकडून तिसरा आहे, S हा W च्या उजवीकडून दुसरा आहे, जो T च्या तत्काळ उजवीला आहे. Q हा U च्या उजव्या बाजूला तिसरा आहे.
T च्या तत्काळ डावीकडे कोण आहे?

DIRECTIONS: Study the following information carefully and answer the questions given below
P, Q, R, S, T, U, V and W are sitting around a circle facing at the centre. T is second to the left of P and third to the right of V, S is second to the right of W, who is to the immediate right of T. Q is third of the right of U.
Who is to the immediate left of T?

ہدایات: مندرجہ ذیل معلومات کو دھیان سے پڑھیں اور نیچے دیے گئے سوالوں کے جواب دیں۔
P، Q، R، S، T، U، V اور W مرکز کی طرف رخ کیے ہوئے ایک دائرے کے ارد گرد بیٹھے ہیں۔ T، P کے بائیں طرف سے دوسرا ہے، جو کہ S، W کے دائیں طرف سے تیسرا ہے V اور Q، U کے دائیں طرف ہے۔ T کے دائیں طرف سے دوسرا ہے، جو کہ S، W کے فوری دائیں طرف ہے۔
T کے فوری بائیں طرف کون ہے؟

A.Q
A.Q
A.Q

B.W
B.W
B.W

C.R
C.R
C.R

D.अपुरी माहिती
D.Data inadequate
D.ڈیٹا ناکافی ہے

Answer: A.Q
A.Q
A.Q

43 DIRECTIONS: A sentence with an underlined phrasal verb is given below. Out of the four options, choose the one which can be substituted for the given phrasal Verb.
Due to sudden death of the company's Chairman, The Annual General Meeting was called off .

A.cancelled

B.carried out

C.attended

D.accelerated

Answer: A.cancelled

44 खालीलपैकी कोणती भौगोलिक आपत्ती नाही?

Which of the following is not a geological disaster?

درج ذیل میں سے کون جغرافیائی آفت نہیں ہے؟

A.ज्वालामुखी
A.Volcanoes
A.آتش فشاں

B.भूकंप
B.Earthquakes
B.زلزلے

C.समुद्री लाटा
C.Sea Surge
C.سمندری تموج

D.सुनामी
D.Tsunami
D.سونامی

Answer: C.समुद्री लाटा
C.Sea Surge
C.سمندری تموج

45 निर्देश: खालील प्रश्न दिलेल्या शब्दांवर आधारित आहेत.

FEST/ LACK/ WORK/ RUSH/ FILM

जर प्रत्येक शब्दातील सर्व अक्षरे इंग्रजी वर्णमालाच्या क्रमानेच मांडली जातात आणि अशा प्रकारे तैयारझालेले शब्द शब्दकोशात डावीकडून उजवीकडे मांडले जातात तर खालील पैकी कोणते मूळ शब्द उजवीकडून दुसरे आहे?

DIRECTIONS: Following question is based on the given words.

FEST/ LACK/ WORK/ RUSH/ FILM

If all the letters in each word are arranged in the English alphabet order in itself and thus formed words arranged in dictionary order from left to right, then which of the following original word is the 2nd from right?

ہدایت جیل کے سوال دے ہے لفجونپر مشتمل ہیں

FEST/ LACK/ WORK/ RUSH/ FILM

اگر ان لفجونکو انگریجی حرف تہجیبی کے جیسا لگایا جائے اور بننے والو لفجونکو لغت جیسا الٹے ہاتھ سے سیدھے ہاتھ ایسا لگایا جائے تو تو کونسا بنیادی لفج یہ سیدھے ہاتھ کو دوسرا ایگا ؟

A.WORK
A.WORK
A.WORK

B.LACK
B.LACK
B.LACK

C.FILM
C.FILM
C.FILM

D.RUSH
D.RUSH
D.RUSH

Answer: D.RUSH
D.RUSH
D.RUSH

46 भारतामध्ये मुघल सत्ता स्थापित करणारा शासक कोण होता –

The ruler who established Mughal rule in India was –

ہندوستان میں مغل حکومت قائم کرنے والا حکمراں _____ تھا

A.जहांगीर
A.Jahangir
A.جہانگیر

B.शेर शाह सूरी
B.Sher Shah Suri
B.شیر شاہ سوری

C.अकबर
C.Akbar
C.اکبر

D.बाबर
D.Babur
D.بابر

Answer: D.बाबर
D.Babur
D.بابر

47 मन व मनोविकारांची प्रथम सैद्धांतिक प्रतिकृती यातून जन्माला आली

The first theoretical model of the mind and mental disorder stemmed from

ذہنی اور دماغی بیماری کا پہلا نظریایہ ماڈل ماخوذ کیا گیا تھا

A.वर्तनात्मक सिद्धांत
A.Behavioral theory
A.کردارسازی کا نظریہ

B.मनोवैज्ञानिक सिद्धांत
B.Psychodynamic theory
B.نفس حرکی کا نظری

C.जैविक सिद्धांत
C.Biological theory
C.حیاتیاتی نظریہ

D.बोधात्मक सिद्धांत
D.Cognitive theory
D.ادراکی نظریہ

Answer: B.मनोवैज्ञानिक सिद्धांत
B.Psychodynamic theory
B.نفس حرکی کا نظری

48 निर्देश: खालील शब्दांची तार्किक क्रमाने मांडणी करा:

(i) भाजी
(ii) बाजार
(iii) कापणे
(iv) स्वयंपाक
(v) अन्न

DIRECTIONS: Arrange the following in a logical order:

(i) Vegetable
(ii) Market
(iii) Cutting
(iv) Cooking
(v) Food

ہدایات: ایک منطقی ترتیب میں مندرجہ ذیل کو مرتب کریں:

(i) سبزیاں
(ii) مارکیٹ
(iii) کاٹنا
(iv) کھانا پکانا
(v) فوڈ

A.(i), (ii), (iii), (iv), (v)
A.(i), (ii), (iii), (iv), (v)
A.(i), (ii), (iii), (iv), (v)

B.(ii), (i), (iii), (iv), (v)
B.(ii), (i), (iii), (iv), (v)
B.(ii), (i), (iii), (iv), (v)

C.(iii), (i), (ii), (v), (iv)
C.(iii), (i), (ii), (v), (iv)
C.(iii), (i), (ii), (v), (iv)

D.(v), (ii), (i), (iii), (iv)
D.(v), (ii), (i), (iii), (iv)
D.(v), (ii), (i), (iii), (iv)

Answer:	B.(ii), (i), (iii), (iv), (v) B.(ii), (i), (iii), (iv), (v) B.(ii), (i), (iii), (iv), (v)

49	Out of the given options which best expresses the meaning of the given Proverb? Barking dogs seldom bite.
	A.People who make big threats never usually carry them out
	B.People who threaten others are the most dangerous people
	C.People are afraid of those who have big and barking dogs
	D.Dogs either bark or bite
Answer:	A.People who make big threats never usually carry them out

50	270050 + 31014 – 90580 + 26019 + 47087 =? 270050 + 31014 – 90580 + 26019 + 47087 =? 270050 + 31014 – 90580 + 26019 + 47087 =?
	A.785632 A.785632 A.785632
	B.32569 B.32569 B.32569
	C.26590 C.26590 C.26590
	D.283590 D.283590 D.283590
Answer:	D.283590 D.283590 D.283590

51	खालीलपैकी स्त्रीलिंगी शब्द ओळखा.
	A.बाग
	B.बगीचा
	C.उद्यान
	D.वरील सर्व
Answer:	A.बाग

52 सूचना: प्रत्येक प्रश्नाला एक प्रमुख विधानासोबत चार विधाने आहेत ज्यांच्याखाली A, B, C, आणि D असे चार विधान आहेत. क्रमवार विधानांची जोडी निवडा ज्यामध्ये प्रथम विधान दुसऱ्या विधानाला सुचवते, आणि दोन्ही विधाने तर्किकदृष्ट्या प्रमुख विधानासोबत निगडित असेल.

जर मी स्वप्न पाहिले, तर मी माझे स्वप्नातले घर बघणार आहे
A. मी स्वप्न पाहिले
B. मी स्वप्न पाहिले नाही
C. मी माझे स्वप्नातले घर बघितले
D. मी माझे स्वप्नातले घर बघितले नाही

DIRECTIONS: Each question has a main statement followed by four statements labelled A, B, C and D. Choose the ordered pair of statements, where the first statement implies the second, and the two statements are logically consistent with the main statement.

If I dream , I will see my dream home
A.I dreamt
B.I did not dream
C.I saw my dream home
D. I did not see my dream home

ہدایت: ہر سوال میں ایک جملہ ہے جسکے بعد چار جملےاے، بی،سی اور ڈی کے نام سے دئے گئے ہیں اسمیں منسلک جوڑیوں کو چنئے۔ جہاں پہلا جملہ دوسرے جملہ کی اور اشارہ کر رہا ہے اور دو جملے منطقی مرکزی بیان کے مطابق ہیں

اگر میں خواب دیکھوں تو اپنا پسندیدہ گھر دیکھوں گا
Aمیں نے خواب دیکھا ۔
Bمیں نے خواب نہیں دیکھا ۔
Cمیں نے اپنا پسندیدہ گھر دیکھا ۔
Dمیں نے اپنا پسندیدہ گھر نہیں دیکھا ۔

A.AC
A.AC
A.AC

B.BA
B.BA
B.BA

C.DA
C.DA
C.DA

D.CD
D.CD
D.CD

Answer: A.AC
A.AC
A.AC

53 मेरूदंडामध्ये किती हाडे असतात?

How many bones are present in vertebral column?

ریڑھ کی ہڈی میں کتنی ہڈیاں موجود ہیں؟

A.28
A.28
A.28

B.30
B.30
B.30

C.33
C.33
C.33

D.26
D.26
D.26

Answer: C.33
C.33
C.33

54 **सूचना:** खालील प्रश्नात असे 3 घटक आहेत ज्यांचा परस्परांशी विशिष्ट संबंध आहे. समान संबंध वर्तुळाच्या संचांनी दर्शविलेला आहे, प्रत्येक वर्तुळ त्याचा आकार कितीही असला तरी, एका घटकाचे प्रतिनिधित्व करते. योग्य वर्तुळाच्या संचांशी खालील घटकांच्या जोड्या लावा.

DIRECTION: The question below has three items having certain relationship among them. The same relationship is expressed by sets of circles, each circle representing one item irrespective of its size. Match the items with right set of circles.

ہدایت:مندرجہ ذیل سوال میں تین آئٹم ہیں جن کے مابین مختلف تعلقات ہیں۔ دائروں کے ایک سیٹ کے ذریعہ یکساں تعلق ظاہر کیا جاتا ہے، ہر دائرہ سائز سے قطع نظر ایک آئٹم کی نمائندگی کرتا ہے۔ آئٹم کو دائروں کے درست سیٹ کے ساتھ ملائیں

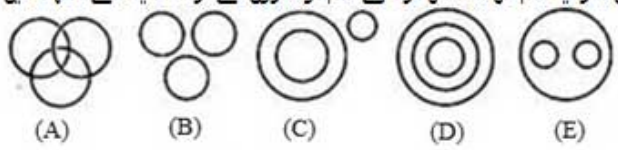

दरवाजा, खिडकी, घर

Door, Window, House

دروازہ، کھڑکی، گھر

A. (A)

B. (B)

C. (C)

D. (E)

Answer: D. (E)

55 सूचना: खाली दिलेल्या प्रश्नात एक विधान आहे ज्याचे I आणि II असे दोन निष्कर्ष त्याखाली अंकित केलेले आहेत. या आधारे सर्वात योग्य पर्याय निवडा.

विधान:
सर्व माकडे शेंगदाणे खातात. शेंगदाणे खाणाऱ्या सर्व प्राण्यांना झोपणे आवडते.

निष्कर्ष:
I. गाढवांना झोपण्यास आवडते.
II. माकडांना झोपण्यास आवडते.

DIRECTIONS: The question below has a statement followed by two conclusions numbered I and II. Based on this choose the option that is most suitable.

Statement:
All monkeys eat peanuts. All animals eating peanuts like sleeping.

Conclusions:
I. Donkeys like sleeping.
II. Monkeys like sleeping.

ہدایات: نیچے دیے گئے سوال میں ایک بیان کے بعد دو نتائج I اور II دیے گئے ہیں۔ اس کی بنیاد پر انتہائی موزوں آپشن کا انتخاب کیجیے۔

بیان:
تمام بندر مونگ پھلی کھاتے ہیں. تمام جانور جو مونگ پھلی کھاتے ہیں، انہیں سونا پسند ہے.

نتیجے:
I. گدھوں کو سونا پسند ہے.
II. بندروں کو سونا پسند ہے.

A.केवळ निष्कर्ष क्रमांक I विधानास अनुसरून आहे
A.Only Conclusion I follows
A. صرف نتیجہ I لاگو ہو گا۔

B.केवळ निष्कर्ष क्रमांक II विधानास अनुसरून आहे
B.Only Conclusions II follows
B. صرف نتیجہ II لاگو ہو گا۔

C.निष्कर्ष क्रमांक I किंवा II अनुसरून आहे
C.Either I or II follows
C. I یا II میں سے ایک لاگو ہو گا۔

D.कोणताही निष्कर्ष अनुसरून नाही
D.Neither I nor II follow
D. I اور II میں سے کوئی بھی لاگو نہیں ہو گا۔

Answer: B.केवळ निष्कर्ष क्रमांक II विधानास अनुसरून आहे
B.Only Conclusions II follows
B. صرف نتیجہ II لاگو ہو گا۔

56

निर्देश: खालील शब्दांची इंग्रजी शब्दकोशानुसार मांडणी करा.

(a) Butterfly
(b) Butler
(c) Butcher
(d) Button
(e) Butter

DIRECTIONS: Arrange the following words according to the English dictionary.
(a) Butterfly
(b) Butler
(c) Butcher
(d) Button
(e) Butter

ہدایت: انگریزی لغت کے مطابق مندرجہ ذیل الفاظ کو مرتب کریں۔

(a) Butterfly
(b) Butler
(c) Butcher
(d) Button
(e) Butter

A.(c), (e), (a), (d), (b)
A.(c), (e), (a), (d), (b)
A.(c), (e), (a), (d), (b)

B.(b), (d), (a), (e), (c)
B.(b), (d), (a), (e), (c)
B.(b), (d), (a), (e), (c)

C.(b), (e), (a), (c), (d)
C.(b), (e), (a), (c), (d)
C.(b), (e), (a), (c), (d)

D.(c), (b), (e), (a), (d)
D.(c), (b), (e), (a), (d)
D.(c), (b), (e), (a), (d)

Answer: D.(c), (b), (e), (a), (d)
D.(c), (b), (e), (a), (d)
D.(c), (b), (e), (a), (d)

57 सूचना: अर्थपूर्ण परिच्छेद निर्माण करण्यासाठी, खाली दिलेली (P), (Q) (R), (S) आणि (T) ही पाच वाक्ये योग्य अनुक्रमाने पुनर्रचना करा; त्यांनतर खालील प्रश्नांची उत्तर द्या.
P. श्रीकृष्णाने आपले सर्व मित्र जमविले
Q. त्यांच्या बाल खोडीमध्ये ते एवढे तल्लीन होते, कि यशोदा घरी परत आल्याचे त्यांच्या लक्षातही आले नाही.
R. प्रत्येकजण जीव मुठीत धरून पळून गेले आणि कृष्णाची चांगलीच पिटाई झाली.
S. एके दिवशी यशोदा काही महत्वाच्या कामासाठी घराबाहेर पडली.

पुनर्रचना केल्यानंतर खालीलपैकी कोणते वाक्य पहिले असेल?

DIRECTION: Rearrange the following five sentences (P), (Q), (R), (S) and (T) in the proper sequence to form a meaningful paragraph; then answer the questions given below them.
P. Shri Krishna gathered all his friends.
Q. Engrossed in their mischief, they did not realize when Yashoda had come back home.
R. Everybody else ran for their lives and Krishna got a good thrashing.
S. One day Yashoda left home for some important work.
T. With their help, he reached the pitcher of the butter and they all had a good time eating it.

Which of the following should be the FIRST sentence after rearrangement?

ہدایات: ان پانچ جملوں (P)، (Q)، (R)، (S) اور (T) کو با معنی پیرا بنانے کے لئے دوبارہ ترتیب دیجئے، پھر نیچے دے گئے سوالوں کے جواب دیجئے
P. شری کرشنا نے اپنے تمام دوستوں کو جمہ کیا
Q. اپنی ستانی میں مست، انکو یے احساس نہیں ہوا کہ یشودہ کب گھر واپس ا گی.
R. ہر کوئی اپنی جان بچانے کے لئے باگ گے لیکن کرشنا کی اچھی پٹائی ہوئی.
S. ایک دن یشودہ کچھ کام کے لئے گھر سے نکلی.
T. اپنے دوستوں کی مدد سے، وو مکھن کے برتن تک پہنچ گیا اور انکو خانے میں مزا آیا.

دوبارہ ترییب دینے کے بعد کون سا جملہ پہلے ہونا چاہیے؟

A.S
A.S
A.S

B.P
B.P
B.P

C.Q
C.Q
C.Q

D.T
D.T
D.T

Answer: A.S
A.S
A.S

58 खालीलपैकी कोणती जोडी अचुक आहे?

Which one of the following is correctly matched?

مندرجہ ذیل میں سے کس میں ایک صحیح مماثلت ہے؟

A.उत्पादक - हिरण
A.Producer — Deer
A. ہرن : پروڈیوسر

B.प्राथमिक उपभोक्ता-बिबट्या
B.Primary consumer—Leopard
B. چیتے : پرائمری صارفین

C.दुय्यम उपभोक्ता-गवत
C.Secondary consumer—Grass
C. گھاس : ثانوی صارفین

D.विघटन करणारा - जीवाणू
D.Decomposer - Bacteria
D. توڑنے والے - بیکٹیریا

Answer: D.विघटन करणारा - जीवाणू
D.Decomposer - Bacteria
D. توڑنے والے - بیکٹیریا

59 भारताचा सर्वोच्च साहित्यिक पुरस्कार आहे

India’s highest literary award is

ہندوستان کا سب سے بڑا ادبی انعام ہے

A.ग्यानब पिट पुरस्कार किंवा इनॅपिथ पुरस्कार
A.Gyab peeth Award or Inampith Award
A.گیان پیٹھ ایوارڈ یا انعام پیٹھ ایوارڈ

B.अर्जुन पुरस्कार
B.Arjuna Award
B.ارجنا ایوارڈ

C.साहित्य अकादमी पुरस्कार
C.Sahitya Akadeim Award
C.ساہتیہ اکادمی ایوارڈ

D.व्यास सन्मान पुरस्कार
D.Vyas Samman Award
D.وياس سمان ايوارڈ

Answer: A.ग्यानब पिट पुरस्कार किंवा इनॅपिथ पुरस्कार
A.Gyab peeth Award or Inampith Award
A.گیان پیٹھ ایوارڈ یا انعام پیٹھ ایوارڈ

60 खालीलपैकी शुद्ध शब्द कोणता ?

A.जोश्ना

B.जोस्ना

C.ज्योस्ना

D.ज्योत्स्ना

Answer: D.ज्योत्स्ना

61 सिंगापूरची राजधानी कोणती आहे?

What is the capital of Singapore?

سنگاپور کا دارالسلطنت کہا ہے؟

A.फूकेत
A.Phuket
A. پھوکیت

B.हनोई
B.Hanoi
B.ہانوئی

C.विएंटियन
C.Vientiane
C.وینٹائن

D.यांपैकी कोणतेही नाही
D.None of these
D.ان میں سے کوئی نہیں

Answer:	D.यांपैकी कोणतेही नाही D.None of these D.ان میں سے کوئی نہیں

62	यापैकी कोण नायलॉनच्या शोधाशी संबंधित आहे? Who is related to the discovery Nylon? کس کا تعلق نائلون کے دریافت سے ہے؟
	A.लुई पाश्चर A.Louis Pasteur A.لوئس پاسٹیئر
	B.जॉन कॅबेट B.John Cabot B.جاب کیبوٹ
	C.जे. नॉक्सफॉर नेयस C.J. Nicephore Niepce C.جے نائسفور نیپس
	D.डॉ. वालेस एच. कॅरथर्स D.Dr. Wallace H. Carothers D.ڈاکٹر ویلیس ایچ کیروتھرس
Answer:	D.डॉ. वालेस एच. कॅरथर्स D.Dr. Wallace H. Carothers D.ڈاکٹر ویلیس ایچ کیروتھرس

63	‘ प्रीत्यर्थ ’ या शब्दाची संधी सोडवा.
	A.प्रीत + अर्थ
	B.प्रीती + अर्थ
	C.प्री + इति + अर्थ
	D.यापैकी नाही
Answer:	B.प्रीती + अर्थ

64 विकासाच्या ज्या अवधीदरम्यान शाळेसाठी तयारी करण्याची संकल्पना विकसित होते आणि बराचसा मोकळा वेळ मित्रांसह खेळण्यात जातो त्यास असे म्हणतात

The period of development during which school readiness are developed and most free time as spent playing with friends is called

ترقی کی وہ میعادجس میں اسکول کی تیاری فروغ پاتی اور دوستوں کے ساتھ گزارا گیا زیادہ تر خالی وقت کو کہا جاتا ہے

A.अर्भकावस्थ
A.Infancy
A.شیرخوارگی

B.सुरुवातीचे बालपण
B.early childhood
B.ابتدائی بچپن

C.मध्य बालपण
C.middle childhood
C.وسط بچپن

D.उशीराचे बालपण
D.late childhood
D.بچپن کا آخری حصہ

Answer: B.सुरुवातीचे बालपण
B.early childhood
B.ابتدائی بچپن

65 सूचना: खालील माहिती काळजीपूर्वक वाचा आणि खालील प्रश्नांची उत्तरे द्या:
P, Q, R, S, T, U, V आणि W टेबलभोवती मध्यभागी तोंड करून बसले आहेत. T हा P च्या डावीकडून दुसरा आणि V च्या उजवीकडून तिसरा आहे, S हा W च्या उजवीकडून दुसरा आहे, जो T च्या तत्काळ उजवीला आहे. Q हा U च्या उजव्या बाजूला तिसरा आहे.
Wच्या संदर्भात Rची स्थिती काय असेल?

DIRECTIONS: Study the following information carefully and answer the questions given below
P, Q, R, S, T, U, V and W are sitting around a circle facing at the centre. T is second to the left of P and third to the right of V, S is second to the right of W, who is to the immediate right of T. Q is third of the right of U.
What is R's position with respect to W?

ہدایات: مندرجہ ذیل معلومات کو دھیان سے پڑھیں اور نیچے دیے گئے سوالوں کے جواب دیں۔
P، Q، R، S، T، U، V اور W مرکز کی طرف رخ کیے ہوئے ایک دائرے کے ارد گرد بیٹھے ہیں۔ T، P کے بائیں طرف سے دوسرا ہے، جو کہ S، W کے دائیں طرف سے تیسرا ہے V اور Q، U کے دائیں طرف ہے۔ T کے دائیں طرف سے دوسرا ہے۔
W کے تعلق سے R کی پوزیشن کیا ہے؟

A.डावीकडे तिसरा
A.Third to the left
A.بائیں سے تیسری

B.डावीकडून चौथा
B.Fourth to the left
B.بائیں سے چوتھی

C.उजवीकडून सहावा
C.Sixth to the right
C.دائیں سے چھٹی

D.डावीकडून पाचवा
D.Fifth to the left
D.بائیں سے پانچویں

Answer: A.डावीकडे तिसरा
A.Third to the left
A.بائیں سے تیسری

66 सूचना: अर्थपूर्ण परिच्छेद निर्माण करण्यासाठी, खाली दिलेली (P), (Q) (R), (S) आणि (T) ही पाच वाक्ये योग्य अनुक्रमाने पुनर्रचना करा; त्यांनतर खालील प्रश्नांची उत्तर द्या.
P. श्रीकृष्णाने आपले सर्व मित्र जमविले
Q. त्यांच्या बाल खोडीमध्ये ते एवढे तल्लीन होते, कि यशोदा घरी परत आल्याचे त्यांच्या लक्षातही आले नाही.
R. प्रत्येकजण जीव मुठीत धरून पळून गेले आणि कृष्णाची चांगलीच पिटाई झाली.
S. एके दिवशी यशोदा काही महत्वाच्या कामासाठी घराबाहेर पडली.

पुनर्रचना केल्यानंतर खालीलपैकी कोणते वाक्य दुसरे असेल?

DIRECTION: Rearrange the following five sentences (P), (Q), (R), (S) and (T) in the proper sequence to form a meaningful paragraph; then answer the questions given below them.
P. Shri Krishna gathered all his friends.
Q. Engrossed in their mischief, they did not realize when Yashoda had come back home.
R. Everybody else ran for their lives and Krishna got a good thrashing.
S. One day Yashoda left home for some important work.
T. With their help, he reached the pitcher of the butter and they all had a good time eating it.

Which of the following should be the SECOND sentence after rearrangement?

ہدایات: ان پانچ جملوں (P)، (Q)، (R)، (S) اور (T) کو با معنی پیرا بنانے کے لئے دوبارہ ترتیب دیجئے، پھر نیچے دے گئے سوالوں کے جواب دیجئے
P. شری کرشنا نے اپنے تمام دوستوں کو جمہ کیا
Q. اپنی ستانی میں مست، انکو یے احساس نہیں ہوا کہ یشودہ کب گھر واپس ا گی.
R. ہر کوئی اپنی جان بچانے کے لئے باگ گے لیکن کرشنا کی اچھی پٹائی ہوئی.
S. ایک دن یشودہ کچھ کام کے لئے گھر سے نکلی.
T. اپنے دوستوں کی مدد سے، وو مکھن کے برتن تک پہنچ گیا اور انکو خانے میں مزا آیا.

دوبارہ ترییب دینے کے بعد کون سا جملہ دوسرا ہونا چاہیے؟

A.P
A.P
A.P

B.S
B.S
B.S

C.Q
C.Q
C.Q

D.R
D.R
D.R

Answer: A.P
A.P
A.P

67 एक माणूस पूर्वेला 2 किमी चालतो, डावीकडे वळतो, 2 किमी चालतो आणि डावीकडे वळून 2 किमी चालतो. तर त्याचे तोंड कुठल्या दिशेला आहे?

A man walks 2 km to the East. He turns 'left and walks 2 km. He again turns left and walks 2 km. Which direction is he facing now?

ایک آدمی مشرق کی طرف 2 کلومیٹر چلتا ہے، بائیں مڑتا ہے، 2 کلومیٹر چلتا ہے اور بائیں مڑتا ہے اور 2 کلومیٹر چلتا ہے۔ وہ کس سمت کا رخ کیے ہوئے ہے؟

A.पूर्व
A.East
A.مشرق

B.पश्चिम
B.West
B.مغرب

C.उत्तर
C.North
C.شمال

D.दक्षिण
D.South
D.جنوب

Answer: B.पश्चिम
B.West
B.مغرب

68 पेट्रोलियम एक मिश्रण आहे—

Petroleum is a Mixture of—

پٹرولیم آمیزہ ہے کس کا—

A.कार्बोहाइड्रेटचे
A.Carbohydrates
A.کاربوہائڈریٹ

B.कार्बोनेटचे
B.Carbonates
B.کاربونیٹ

C.हायड्रोकार्बन्सचे
C.Hydrocarbons
C.ہائڈروکاربن

D.कार्बाइड्सचे
D.Carbides
D.کاربائڈس

Answer: C.हायड्रोकार्बन्सचे
C.Hydrocarbons
C.ہائڈروکاربن

69 खालीलपैकी अशुद्ध वाक्य कोणते ?

A.मी झोपलो होतो.

B.तो झोपला होता.

C.आम्ही झोपलो होतो.

D.तुम्ही झोपलो होतो.

Answer: D.तुम्ही झोपलो होतो.

70 शारीरिक आरोग्य आणि अशिक्षितता याला मोजण्यासाठी दर्शके आहेत

Physical health and literacy are the indicators to measure

جسمانی صحت اور تعلیم _____ کے پیمائش کا اشاریہ ہیں۔

A.दारिद्र
A.Poverty
A.غریبی

B.विकार
B.Diseases
B.امراض

C.वैयक्तिक गुणधर्म
C.Personal traits
C. شخصی عادت

D.फसवणूक
D.Deprivation
D.محرومی

Answer: A.दारिद्र
A.Poverty
A.غریبی

71 संगणकात कीबोर्डचे कार्य काय आहे?

What is a function of a keyboard in computer?

کمپیوٹر میں کیبورڈ کا کام کیا ہے؟

A.छापणें
A.Print
A.پرنٹ

B.इनपुट
B.Input
B.انپُٹ

C.प्रॉसेस
C.Process
C.پروسیس

D.इनपुट आणि आउटपूटच्या दरम्यान
D.In between input and output
D.انپُٹ اور آوٹ پُٹ کے مابین میں

Answer: B.इनपुट
B.Input
B.انپُٹ

72 विशिष्ट क्षेत्रामध्ये उल्लेखनीय क्षमता

Remarkable ability in a specific field

کسی خاص میدان میں اہم وبنیادی لیاقت_____کہتے ہیں:

A.प्रतिभा
A.Talent
A.جوہر) ٹیلنٹ)

B.प्रतिभाशाली
B.Giftedness
B.وہبی صلاحیت(گفٹڈنس)

C.कौशल्य
C.Skills
C.مہارتیں

D.सृजनशीलता
D.Creativity
D. تخلیقی صلاحیت

Answer:
B.प्रतिभाशाली
B.Giftedness
B.گفٹڈنس(وہبی صلاحیت)

73 सूचना: दिलेल्या पर्यायांमधून वेगळे ते बाहेर काढा.

DIRECTIONS: Find the odd one out from the given alternatives.

سمت: دیے گئے متبادل میں سے بے جوڑ کو تلاش کرو۔

A.काठी
A.Stick
A.چھڑی

B.पाते/ब्लेड
B.Blade
B.بلیڈ

C.सुरी
C.Knife
C.چاقو

D.तलवार
D.Sword
D.تلوار

Answer:
A.काठी
A.Stick
A.چھڑی

74 खालीलपैकी कोणते पाण्यातील वनस्पतीचे उदाहरण आहे?

Which of the following is an example of aquatic plants?

درج ذیل میں سے پانی کے پودوں کی ایک مثال ہے؟

A.हायड्रिला
A.Hydrilla
A.ہائڈریلا

B.कॅक्टस
B.Cactus
B. کیکٹس

C.कडूलिंब
C.Neem
C. نیم

D.वरीलपैकी एकही नाही
D.None of the above
D. مندرجہ بالا میں سے کوئی نہیں

Answer:
A.हायड्रिला
A.Hydrilla
A.ہائڈریلا

75
सूचना: खालील माहिती काळजीपूर्वक वाचा आणि खालील प्रश्नांची उत्तरे द्या:
P, Q, R, S, T, U, V आणि W टेबलभोवती मध्यभागी तोंड करून बसले आहेत. T हा P च्या डावीकडून दुसरा आणि V च्या उजवीकडून तिसरा आहे, S हा W च्या उजवीकडून दुसरा आहे, जो T च्या तत्काळ उजवीला आहे. Q हा U च्या उजव्या बाजूला तिसरा आहे.
R च्या डावीकडून चौथा कोण आहे?

DIRECTIONS: Study the following information carefully and answer the questions given below
P, Q, R, S, T, U, V and W are sitting around a circle facing at the centre. T is second to the left of P and third to the right of V, S is second to the right of W, who is to the immediate right of T. Q is third of the right of U.
Who is fourth to the left of R?

ہدایات: مندرجہ ذیل معلومات کو دھیان سے پڑھیں اور نیچے دیے گئے سوالوں کے جواب دیں۔
P، Q، R، S، T، U، V اور W مرکز کی طرف رخ کیے ہوئے ایک دائرے کے ارد گرد بیٹھے ہیں۔ T، P کے بائیں طرف سے دوسرا ہے، جو کہ S، W کے دائیں طرف سے تیسرا ہے۔ T کے دائیں طرف سے دوسرا ہے۔ Q، U کے دائیں طرف سے تیسرا ہے۔
R کے بائیں طرف سے چوتھا کون ہے؟

A.U
A.U
A.U

B.P
B.P
B.P

C.S
C.S
C.S

D.W
D.W
D.W

Answer: B.P
B.P
B.P

76 सूचना: खालील प्रश्नांमध्ये दिलेल्या पर्यायांमधून संबंधित अक्षर/शब्द/संख्या निवडा.

PARTS : STRAP :: WOLF : ?

DIRECTIONS: In the following question, select the related letter/word/number from the given alternatives.

PARTS : STRAP :: WOLF : ?

سمت: مندرجہ ذیل سوال میں، دیے گئے متبادل سے متعلقہ حرف/لفظ/نمبر منتخب کریں۔

PARTS : STRAP :: WOLF : ?

A.FOX
A.FOX
A.FOX

B.ANIMAL
B.ANIMAL
B.ANIMAL

C.WOOD
C.WOOD
C.WOOD

D.FLOW
D.FLOW
D.FLOW

Answer: D.FLOW
D.FLOW
D.FLOW

77 खालीलपैकी मातीचे कोणते संयोजन वनस्पतीच्या विकासासाठी उत्तम आहे?

The combination of which of the following soils is best for plant growth?

پودوں کے بڑھنے کے لئے کس قسم کی مٹی کا مجموعہ چاہئے ہوتا ہے ۔

A.माती, वाळू आणि खडी
A.Clay, sand & gravel
A. مٹی، ریت اور بجری کا

B.बुरशी, चिकणमाती आणि खडी
B.Humus, clay & gravel
B.ہموس، مٹی اور بجری کا

C.वाळू, बुरशी आणि खडी
C.Sand, humus & gravel
C. ریت، ہموس اور بجری کا

D.बुरशी, वाळू आणि चिकणमाती
D.Humus, sand & clay
D.ئموس ، ریت اور مٹی کا

Answer: D.बुरशी, वाळू आणि चिकणमाती
D.Humus, sand & clay
D.ئموس ، ریت اور مٹی کا

78 सूचना: अर्थपूर्ण परिच्छेद निर्माण करण्यासाठी, खाली दिलेली (P), (Q) (R), (S) आणि (T) ही पाच वाक्ये योग्य अनुक्रमाने पुनर्रचना करा; त्यांनतर खालील प्रश्नांची उत्तर द्या.
P. श्रीकृष्णाने आपले सर्व मित्र जमविले
Q. त्यांच्या बाल खोडीमध्ये ते एवढे तल्लीन होते, कि यशोदा घरी परत आल्याचे त्यांच्या लक्षातही आले नाही.
R. प्रत्येकजण जीव मुठीत धरून पळून गेले आणि कृष्णाची चांगलीच पिटाई झाली.
S. एके दिवशी यशोदा काही महत्वाच्या कामासाठी घराबाहेर पडली.

पुनर्रचना केल्यानंतर खालीलपैकी कोणते वाक्य तिसरे असेल?

DIRECTION: Rearrange the following five sentences (P), (Q), (R), (S) and (T) in the proper sequence to form a meaningful paragraph; then answer the questions given below them.
P. Shri Krishna gathered all his friends.
Q. Engrossed in their mischief, they did not realize when Yashoda had come back home.
R. Everybody else ran for their lives and Krishna got a good thrashing.
S. One day Yashoda left home for some important work.
T. With their help, he reached the pitcher of the butter and they all had a good time eating it.

Which of the following should be the THIRD sentence after rearrangement?

ہدایات: ان پانچ جملوں (P)، (Q)، (R)، (S) اور (T) کو با معنی پیرا بنانے کے لئے دوبارہ ترتیب دیجئے، پھر نیچے دے گئے سوالوں کے جواب دیجئے
P. شری کرشنا نے اپنے تمام دوستوں کو جمہ کیا
Q. اپنی ستانی میں مست، انکو یے احساس نہیں ہوا کہ یشودہ کب گھر واپس ا گی.
R. ہر کوئی اپنی جان بچانے کے لئے باگ گے لیکن کرشنا کی اچھی پٹائی ہوئی.
S. ایک دن یشودہ کچھ کام کے لئے گھر سے نکلی.
T. اپنے دوستوں کی مدد سے، وو مکھن کے برتن تک پہنچ گیا اور انکو خانے میں مزا آیا.

دوبارہ ترییب دینے کے بعد کون سا جملہ تیسرا ہونا چاہیے؟

A.T
A.T
A.T

B.P
B.P
B.P

C.Q
C.Q
C.Q

D.S
D.S
D.S

Answer: A.T
A.T
A.T

79 जगामधील सर्वांत मोठा महासागर _____हा आहे

The largest ocean in the world is –

دنیا میں سب سے بڑا سمندر/بحر _____ ہے

A.अटलांटीक महासागर
A.Atlantic Ocean
A.بحر الٹلانٹک

B.आर्कटिक महासागर
B.Arctic Ocean
B.بحر آرکٹک

C.प्रशांत महासागर
C.Pacific Ocean
C.بحرالکاہِل

D.हिंदी महासागर
D.Indian Ocean
D.بحر ہند

Answer: C.प्रशांत महासागर
C.Pacific Ocean
C.بحرالکاہِل

80 उच्च न्यायालयामध्ये मुख्य न्यायमुर्ती आणि इतर न्यायाधीशांना कोण नियुक्त करतो?

Who appoints the Chief Justice and other judges of a High Court?

ہائی کورٹ کے چیف جسٹس اور دیگر ججوں کا تقررکون کرتا ہے ؟

A.राज्याचा राज्यपाल
A.The State Governor
A. ریاست کے گورنر

B.राज्याचे मुख्यमंत्री
B.The State Chief Minister
B.ریاست کا وزیر اعلی

C.राष्ट्रपती
C.The President
C. صدر

D.सर्वोच्च न्यायालयाचे मुख्य न्यायमुर्ती
D.The Chief Justice of the Supreme Court
D. سپریم کورٹ کے چیف جسٹس

Answer: C.राष्ट्रपती
C.The President
C. صدر

81 खालीलपैकी अशुद्ध शब्द कोणता ?

A.कपिल

B.मनिषा

C.मनीष

D.मनुष्य

Answer: B.मनिषा

82 निर्देश: पुढील प्रश्नांपैकी प्रत्येक प्रश्नात एक संख्या गहाळ आहे. मालिकेचा नमुना समजून घ्या आणि योग्य संख्या निवडा.
3, 128, 6, 64, 9, ... , 12, 16, 15, 8

DIRECTION: In each of the following questions, one number is missing in the series. You have to understand the pattern of the series and insert the number.

3, 128, 6, 64, 9, ... , 12, 16, 15, 8

ہدایت جیل کے ہر سوال میں سرج کا ایک نمبر گمشدہ ہے . آپکو اس سرج کو سمجھنا ہے. اور گمشدہ نمبر کو یہا کھوجنا ہے

3, 128, 6, 64, 9, ... , 12, 16, 15, 8

A.32
A.32
A.32

B.12
B.12
B.12

C.108
C.108
C.108

D.72
D.72
D.72

Answer: A.32
A.32
A.32

83

सूचना: दिलेल्या चारांपैकी वेगळी (असंबद्ध) असणारी आकृती शोधून काढा.

DIRECTIONS: Find the odd from the given four figures.

ہدایات: نیچے دی گئی چار شکلوں میں طاق کونسی ہے؟

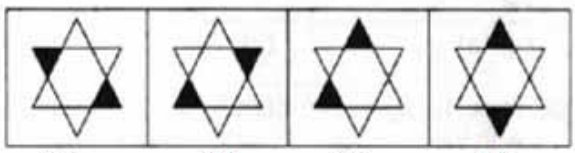

A. (A)

B. (B)

C. (C)

D. (D)

Answer: C. (C)

84

कॉम्प्युटर म्हणजे

Computer is a—

کمپیوٹر ایک --- ہے-

A.शिकविण्यासाठी वरदान आहे
A.Boon for teaching
A.تعلیم کے لئے بون

B.शिकविण्यासाठी शाप आहे
B.Curse for teaching
B.تدریس کے لئے لعنت

C.शिकविण्यामधील क्रांती आहे
C.Revolution in teaching
C.تعلیم میں انقلاب

D.शिकविणे नष्ट करत आहे
D.Ruining the teaching
D.تدریس کو برباد کرنا

Answer: A.शिकविण्यासाठी वरदान आहे
A.Boon for teaching
A.تعلیم کے لئے بون

85 DIRECTIONS: A sentence with an underlined word is given below. Find the Word which is most similar in meaning to the underlined word.
The lower tax rate is particularly advantageous to poorer families.

A.Favourable

B.Unfavourable

C.Adverse

D.Unlucky

Answer: A.Favourable

86 खालीलपैकी शुद्ध वाक्य कोणते ?

A.शेतकरी शेतात राबराब राबतो.

B.शेतकरी शेतात रामराम रमतो.

C.शेतकरी शेतात घामघाम घामतो.

D.शेतकरी शेतात घमघम घमतो.

Answer: A.शेतकरी शेतात राबराब राबतो.

87 Out of the given options, choose the one which is the correct indirect speech of the sentence given below.
She said, “I do not wish to see any of you; go away.”

A.She says that she do not wish to see any of them and orders them to go away.

B.She says that she does not wish to see any of you and ordered them to go away.

C.She said that she did not wish to see any of them and ordered them to go away.

D.She says that she did not wished to see any of them and orders them to go away.

Answer: C.She said that she did not wish to see any of them and ordered them to go away.

88 विधान:
भारतभरातील विविध महाविद्यालये आणि विद्यापीठांमध्ये सरकारविरोधात निदर्शने वाढत आहेत.

कृतीचा कोर्स:
I. सर्व महाविद्यालये आणि विद्यापीठे ज्यांचे विद्यार्थी सरकारविरूद्ध विरोध करतात त्यांना अनुदान / मदत थांबवा.
II. ते काही चुकीचे करत आहेत काय, हे पाहण्यासाठी सरकारने आत्मनिरीक्षण केले पाहिजे.

Statement:
Protests against the government are increasing in various colleges and universities across India.

Course of actions:
I. Stop subsidy/aid to all the colleges and universities whose students protest against government.
II. Government should do introspection to see if they are doing something wrong.

بیان:
پورے انڈیا میں مختلف کالجوں اور یونیورسٹیوں میں حکومت کے خلاف احتجاج بڑھ رہے ہیں۔

لائحہ عمل:
I۔ ایسے تمام کالجوں اور یونیورسٹیوں کی امداد بند کر دیں جن کے طلباء حکومت کے خلاف احتجاج کرتے ہیں۔
II۔ حکومت کو غور کرنا چاہیے کہ وہ کچھ غلط تو نہیں کر رہی۔

A.फक्त I अनुसरून आहे
A.Only I follows
A. صرف I لاگو ہو گا۔

B.फक्त II अनुसरण करते आहे
B.Only II follows
B. صرف II لاگو ہو گا۔

C.एकतर I किंवा II अनुसरून आहे
C.Either I or II follows
C. I یا II میں سے ایک لاگو ہو گا۔

D.I किंवा II दोन्हीपैकी काहीही अनुसरण करत नाही
D.Neither I nor II follows
D. I اور II میں سے کوئی بھی لاگو نہیں ہو گا۔

Answer: B.फक्त II अनुसरण करते आहे
B.Only II follows
B. صرف II لاگو ہو گا۔

89 13369 - 97215+679871+34=?

13369 - 97215+679871+34=?

13369 - 97215+679871+34=?

A.596663
A.596663
A.596663

B.596059
B.596059
B.596059

C.596700
C.596700
C.596700

D.595710
D.595710
D.595710

Answer: B.596059
B.596059
B.596059

90 नियमित बहुभुजाचा प्रत्येक आंतर कोन 120° चा आहे. बाजूंची संख्या असेल:

Each interior angle of a regular polygon is 120°. The number of sides is:

ایک باقاعدہ کثیر الاضلاع کا ہر اندرونی اینگل 120 ڈگری ہے۔ طرفوں کا عدد ہے:

A.7
A.7
A.7

B.6
B.6
B.6

C.5
C.5
C.5

D.8
D.8
D.8

Answer: B.6
B.6
B.6

91 ‘दि डिसकव्हरी ऑफ इंडिया’ या पुस्तकाचे लेखक कोण आहेत?

Who is the author of the book ‘The Discovery of India’?

‘دی دسکوری آف انڈیا’ کتاب کا مصنف کون ہے؟

A.महात्मा गांधी
A.Mahatma Gandhi
A.مہاتما گاندھی

B.सुभाष चंद्र बोस
B.Subhas Chandra Bose
B.سبھاس چندرا بوس

C.पंडीत जवाहरलाल नेहरू
C.Pt. Jawaharlal Nehru
C.پنڈت جواہر لال نہرو

D.दादाभाई नौरोजी
D.Dadabhai Naoroji
D.دادا بھائی نوروجی

Answer: C.पंडीत जवाहरलाल नेहरू
C.Pt. Jawaharlal Nehru
C.پنڈت جواہر لال نہرو

For More Info And Videos About TAIT-Exam Syllabus And Other Exam Visit My Channel
BADSHAHimp SubScribe Like & Share YouTube WWW.YouTube/BADSHAHimp

92 सूचना: प्रत्येक प्रश्नात दोन विधाने आहेत ज्यांच्या नंतर दोन निष्कर्ष आहेत ज्यांना I आणि II असे अंकित केले आहे. सर्वसामान्यपणे ज्ञात असलेल्या तथ्यांशी विसंगती असली तरीही, हे सत्य असल्याचे तात्पुरते मानून, सामान्यतः ज्ञात असलेल्या तथ्यांकडे दुर्लक्ष करून, दिलेल्या निष्कर्षांपैकी कोणती तर्कशुद्धपणे विधानांचे अनुसरण करतात ते ठरवा.
विधाने :
सर्व द्राक्षे सफरचंद असतात.
सर्व सफरचंदे आंबे असतात.
निष्कर्ष:
I. सर्व द्राक्षे आंबे असतात.
II. सर्व आंबे द्राक्ष असतात.

DIRECTION: Each of these questions consist of two statements followed by two conclusions marked I and II. Consider the statements to be true, even though they seem to be at variance with the commonly known facts and find out which of the given conclusion (s) logically follow (s) the statements, disregarding the commonly known facts.

Statements:
All grapes are apples.
All apples are mangoes.

Conclusions:
I. All grapes are mangoes.
II. All mangoes are grapes.

ہدایت:ان میں سے ہر ایک سوال دو بیانات پر مشتمل ہے جس کے بعد دو نتائج دیے گئے ہیں جنھیں I اور II سے نشان زد کیا گیا ہے۔ بیانات کے درست ہونے پر غور کریں، اگرچہ وہ عام طور پر معلوم حقائق کے برعکس نظر آتے ہوں اور تلاش کریں کہ کون سے دیے گئے نتائج منطقی طور پر بیانات کی پیروی کرتے ہیں، عام طور پر معلوم حقائق سے قطع نظر۔

بیانات:
تمام انگور سیب ہیں۔
تمام سیب آم ہیں۔

حل:
I. تمام انگور آم ہیں۔
II. تمام آم انگور ہیں۔

A.जर केवळ निष्कर्ष I निघत असल्यास.
A.If only I follows
A.صرف I پیروی کرتا ہے۔

B.जर केवळ निष्कर्ष II निघत असल्यास.
B.If only II follows
B.صرف II پیروی کرتا ہے۔

C.जर दोन्ही निष्कर्ष I आणि II निघत नसल्यास.
C.If neither I nor II follows
C.نہ تو I نہ ہی II پیروی کرتا ہے

For More Info And Videos About TAIT-Exam Syllabus And Other Exam Visit My Channel
BADSHAHimp SubScribe Like & Share YouTube WWW.YouTube/BADSHAHimp

D.जर दोन्ही निष्कर्ष I आणि II निघत असल्यास.
D.If both I and II follow
D.I اور II دونوں پیروی کرتے ہیں

Answer: A.जर केवळ निष्कर्ष I निघत असल्यास.
A.If only I follows
A.صرف I پیروی کرتا ہے۔

93 खालील आकृतीमध्ये किती त्रिकोण आहेत?

How many triangles are there in the following figure?

نیچے کی شکل میں کتنے مثلث ہے؟



A. 5

B. 12

C. 9

D. 10

Answer: D. 10

94 खालीलपैकी कोणते तत्व प्रेरणा चक्रासह जोडले गेलेले नाही?

Which of the following elements is not associated with the cycle of motivation?

مندرجہ ذیل عناصر میں سے کون سا حوصلہ افزائی کے سائیکل سے متعلق نہیں ہے؟

A.गरज
A.Need
A.ضرورت

B.अन्न
B.Food
B.کھانا

For More Info And Videos About TAIT-Exam Syllabus And Other Exam Visit My Channel
BADSHAHimp SubScribe Like & Share WWW.YouTube/BADSHAHimp

C.प्रेरक
C.Drive
C.محرک

D.प्रोत्साहन
D.Incentive
D.معاوضہ

Answer: B.अन्न
B.Food
B.کھانا

95 मानवी शरीरात खालीलपैकी कोणते सर्वात कठीण पदार्थ आहे?

Which of the following is the hardest substance in the human body?

انسانی جسم میں سب سے سخت ترین مادہ کیا ہے؟

A.अस्थी
A.Bone
A.ہڈی

B.दंतकवच
B.Enamel
B.انیمل

C.दंती
C.Dentine
C. دنتین

D.नख
D.Nail
D.ناخن

Answer: B.दंतकवच
B.Enamel
B.انیمل

For More Info And Videos About TAIT-Exam Syllabus And Other Exam Visit My Channel
BADSHAHimp SubScribe Like & Share YouTube WWW.YouTube/BADSHAHimp

96	निर्देश: दिलेल्या अंक मालिकेतील चुकीची संज्ञा शोधा: 25, 23, 27, 19, 34, 3, 67 DIRECTIONS: Find the wrong term in the given number series: 25, 23, 27, 19, 34, 3, 67 ہدایت دے گئے نمبرس سرج مے غلط نمبر کھوجے 25, 23, 27, 19, 34, 3, 67
	A.23 A.23 A.23
	B.3 B.3 B.3
	C.34 C.34 C.34
	D.19 D.19 D.19
Answer:	C.34 C.34 C.34
97	संतुलनाची संकल्पना फ्रिट्झ हायडरद्वारे प्रस्तावित केले गेले The concept of balance was proposed by Fritz Heider توازن کا تصور Fritz Heider کے ذریعہ دیا گیا تھا۔
	A.चूक A.false A.غلط
	B.बरोबर B.true B.صحیح

C.तो वेगळ्या क्षेत्रात समाईक आहे
C.He belongs to a different field
C.اس کا تعلق ایک دوسرے میدان سے ہے

D.पक्के माहीत नाही
D.Not sure
D. یقین سے نہیں کہہ سکتا

Answer:
B.बरोबर
B.true
B.صحیح

98 किटाणूनाशक वनस्पती सहसा यामध्ये रूपांतरीत होतात

Insectivorous plants are usually adapted to

انسیکٹیورس پودے عام طور پر اختیار کرتے ہیں

A.पाणी समृध्द माती
A.Water rich soils
A. پانی سےبھرپور زمین

B.साखरची उणीव असलेली माती
B.Soils deficient in sugars
B.زمین میں شکر میں کمی

C.कमी प्रमाणात आढळणाऱ्या घटकाने भरपूर असलेली माती
C.Soils rich in trace elements
C. ٹریس عناصر سے بھرپور زمین

D.नायट्रोजन युक्तसंयुगाची कमतरता माती
D.Soils deficient in nitrogenous compounds
D. نائٹروجن کے مرکبات میں کمی مٹی

Answer:
D.नायट्रोजन युक्तसंयुगाची कमतरता माती
D.Soils deficient in nitrogenous compounds
D. نائٹروجن کے مرکبات میں کمی مٹی

99 कुठल्याही भाजीपाल्यामध्ये नसलेले जीवनसत्व आहे-

The vitamin which cannot be had from any vegetables is

وہ وٹامن جو کسی بھی سبز سے حاصل نہیں کی جا سکتی ہے

A.डी जीवनसत्व
A.Vitamin D
A.وٹامن اے

B.ई जीवनसत्व
B.Vitamin E
B.وٹامن ای

C.सी जीवनसत्व
C.Vitamin C
C.وٹامن سی

D.बी जीवनसत्व
D.Vitamin B
D.وٹامن بی

Answer: A.डी जीवनसत्व
A.Vitamin D
A.وٹامن اے

100 बाल-केंद्रीत पद्धतीची विशिष्टता म्हणजे

The characteristics of Child-centered method is—

بچوں کی مرکزیت پر مبنی طریقے کی خصوصیات-

A.शिकवण्यासाठी सर्व विद्यार्थ्यांना वर्गाच्या मध्यभागी गोळा करणे
A.Pile-up all the students in the center of the class for teaching
A.تدریس کے لئے تمام طالب علموں کو کلاس کے درمیان میں جمع کرنا

B.विद्यार्थ्यांच्या गरजा आणि हित लक्षात ठेवून त्यांना शिकवणे
B.To teach the students keeping in mind their needs and interests
B.طالب علموں کو ان کی ضروریات اور مفادات کو ذہن میں رکھتے ہوئے سکھانا

C.विद्यार्थ्यांना संपूर्ण स्वातंत्र्य देणे
C.To give full freedom to the students
C.طلباء کو مکمل آزادی دینے کے لئے

D.विद्यार्थ्यांना गोलाकार गटामध्ये शिकवणे
D.To teach the students in a circular group
D.طلباء کو ایک سرکلر گروپ میں سکھانے کے لئے

Answer: B.विद्यार्थ्यांच्या गरजा आणि हित लक्षात ठेवून त्यांना शिकवणे
B.To teach the students keeping in mind their needs and interests
B.طالب علموں کو ان کی ضروریات اور مفادات کو ذہن میں رکھتے ہوئے سکھانا

101 सूचना: खालील प्रश्नांमध्ये दिलेल्या पर्यायांमधून संबंधित अक्षर/शब्द/संख्या निवडा.

विषयपत्रिका : सभा ::

DIRECTIONS: In the following question, select the related letter/word/number from the given alternatives.

Agenda : Meeting ::

سمت: مندرجہ ذیل سوال میں، دیے گئے متبادل سے متعلقہ حرف/لفظ/نمبر منتخب کریں۔

ایجنڈا: میٹنگ ::

A.कार्यक्रम : कार्य
A.Programme : Function
A.پروگرام : فنکشن

B.कामगिरी : तिकीट
B.Performance : Ticket
B.کارکردگی : ٹکٹ

C.मॅप : मापनपट्टी
C.Map : Scale
C.نقشہ : پیمانہ

D.तळटीप : लेख
D.Footnote : Article
D.حاشیہ : مضمون

Answer: A.कार्यक्रम : कार्य
A.Programme : Function
A.پروگرام : فنکشن

102 दिलेल्या श्रेणीतील पुढची संज्ञा काय असेल?

The next term of a given pattern will be

دیئے گئے پٹرن میں اگلی اصطلاح کیا ہو گی؟



(A) 

(B) 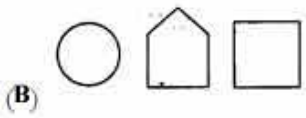

(C) 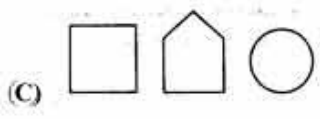

(D) 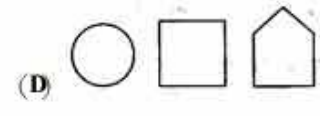

Answer: (D) 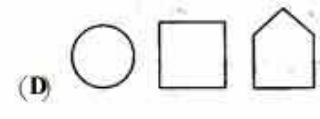

103 खालीलपैकी शरीराचा वेगळा अवयव निवडा –

Pick out the odd body-organ of the following –

درج ذیل میں سے بے جوڑ جسم کے عضو کو چنیں

A.मूत्रपिंड
A.Kidney
A.گردہ

B.यकृत
B.Liver
B.جگر

C.मोठे आतडे
C.Large Intestine
C.بڑی آنت

D.लाळोत्पादक ग्रंथी
D.Salivary gland
D.لعاب کی گانٹھیں

Answer: D.लाळोत्पादक ग्रंथी
D.Salivary gland
D.لعاب کی گانٹھیں

104 सूचना: या प्रश्नांमध्ये पर्याय A आणि B यांच्या सहित दोन विधाने दिलेली आहेत. जरी सामान्यपणे माहीत असलेल्या तथ्यांबरोबर जुळत नसले तरी खालील विधाने बरोबर आहेत असे समजून तुमचे योग्य उत्तर लिहा:
A: सर्व शेळ्या कोकरु आहेत.
B: काही कोकरू गाई आहेत.

DIRECTION: In these questions, two statements are given, followed by two inferences A and B. Assume the statements to be true even if they are at variance with the known facts and then mark your answer as:

All goats are cows.
Some goats are lambs.
A: All goats are lambs.
B: Some lambs are cows.

ہدایت:ان سوالات میں، دو بیانات دیے گئے ہیں، جن کے بعد دو تجاویز A اور B دیے گئے ہیں۔ بیانات کے درست ہونے کو تسلیم کریں اگرچہ وہ عام طور پر معلوم حقائق کے برعکس ہوں اور پھر اس کے مطابق اپنا جواب نشان زد کریں:

سبھی بکریاں گائے ہیں۔
کچھ بکریاں میمنے ہیں۔

A: سبھی بکریاں میمنے ہیں
B: کچھ میمنے گائے ہیں۔

A.जर केवळ पर्याय (A) असल्यास.
A.If only inference (A) follows
A.صرف تجویز (A) پیروی کرتا ہے۔

B.जर केवळ पर्याय (B) असल्यास.
B.If only inference (B) follows
B.صرف تجویز (B) پیروی کرتا ہے۔

C.जर दोन्ही पर्याय (A) आणि (B) असल्यास.
C.If both (A) and (B) follow
C.(A) اور (B) دونوں پیروی کرتے ہیں۔

D.जर दोन्ही पर्याय (A) आणि (B) नसल्यास.
D.If neither (A) nor (B) follows
D.نہ تو (A) نہ ہی (B) پیروی کرتے ہیں۔

Answer: B.जर केवळ पर्याय (B) असल्यास.
B.If only inference (B) follows
B.صرف تجویز (B) پیروی کرتا ہے۔

105 सूचना: खालील प्रश्नांमध्ये दिलेल्या पर्यायांमधून संबंधित अक्षर/शब्द/संख्या निवडा.

Sheep : Peehs : : Square : ?

DIRECTIONS: In the following question, select the related letter/word/number from the given alternatives.

Sheep : Peehs : : Square : ?

سمت: مندرجہ ذیل سوال میں، دیے گئے متبادل سے متعلقہ حرف/لفظ/نمبر منتخب کریں۔

Sheep : Peehs : : Square : ?

A.Sqreqa
A.Sqreqa
A.Sqreqa

B.Erauqs
B.Erauqs
B.Erauqs

C.Squres
C.Squres
C.Squres

D.Resqae
D.Resqae
D.Resqae

Answer: B.Erauqs
B.Erauqs
B.Erauqs

106 खालीलपैकी कोणते विधान खरे आहे?

Which of the following statement is true?

مندرجہ ذیل میں سے کون سا بیان درست ہے؟

A.ध्वनीची गती प्रकाशापेक्षा अधिक वेगवान असते.
A.The speed of the sound is more than speed of light
A.آواز کی رفتار روشنی کی رفتار سے تیز ہے

B.प्रकाशाची गती आवाजाच्या वेगापेक्षा अधिक असते.
B.The speed of light is more than speed of sound
B.روشنی کی رفتار آواز کی رفتار سے تیز ہے

C.प्रकाशाची गती आवाजाच्या गती सारखी असते
C.The speed of light is equal to the speed of sound
C. روشنی کی رفتار آواز کی رفتار کے مساوی ہے

D.वरील एकही नाही
D.None of these
D.ان میں سے کوئی بھی نہیں

Answer: B.प्रकाशाची गती आवाजाच्या वेगापेक्षा अधिक असते.
B.The speed of light is more than speed of sound
B.روشنی کی رفتار آواز کی رفتار سے تیز ہے

107 ' समुद्र ' या शब्दाचा समानार्थी शब्द कोणता ?

A.सिंधू

B.सरोवर

C.तलाव

D.झील

Answer: A.सिंधू

108 कोपरा आणि गुडघाच्या सांध्यामुळे हाडे हलतात

Elbow and knee joints the bones can move in

کہنی اور گھٹنے کے جوڑ کی ہڈیوں کو گھما سکتے ہیں

A.सर्व दिशेला
A.all directions
A. تمام سمتوں

B.चार दिशेला
B.four directions
B. چار سمتوں

C.एका दिशेत
C.one direction
C. ایک سمت

D.दोन दिशेत
D.two directions
D. دو سمتوں

Answer: C.एका दिशेत
C.one direction
C. ایک سمت

109 युनिसेफचे पूर्ण रूप काय आहे?

What is the full form of UNICEF?

یونیسیفکی پوری شکل کیا ہے؟

A.युनायटेड नेशन्स चिल्ड्रन्स फंड
A.United Nations Children's Fund
A.یونائیٹیڈ نیشنس چلڈرنس فنڈ

B.युनायटेड नेशन्स चिल्ड्रन्स फोरम
B.United Nations Children's Forum
B.یونائیٹیڈ نیشنس چلڈرنس فورم

C.अंडर नरीश्ड चिल्ड्रन्स फं
C.Under Nourished Children's Fund
C.انڈر نوریشڈ چلڈرنس فنڈ

D.अंडर नरीश्ड चिल्ड्रन इव्हॉल्वमेंड फंड
D.Under Nourished Children Evolvement Fund
D.انڈر نوریشڈ چلڈرن ایوولمینٹ فنڈ

Answer: A.युनायटेड नेशन्स चिल्ड्रन्स फंड
A.United Nations Children's Fund
A.یونائیٹیڈ نیشنس چلڈرنس فنڈ

110 एक व्यक्ती टेबल 12% तोट्याने विक्री करते आणि पुस्तक 19% नफ्याने विक्री करतो तेव्हा त्याला रु. 160 नफा होतो. पण त्याने जर टेबल 12% नफ्याला आणि पुस्तक 16% तोट्याने विकले तर त्याला रु. 40 नुकसान सहन करावे लागते. एका पुस्तकाची किंमत (रुपयांमध्ये) काढा.

A man sells a table at 12% loss and a book at 19% profit then he earns Rs.160 as profit. But if he sells the table at 12% profit and the book at 16% loss then he bears a loss of Rs.40. Find the price (in Rs.) of one book.

ایک آدمی 12%نقصان پر ایک میز اور 19%منافع پر ایک کتاب فروخت کرتا ہے تو اس کے پاس منافع کے طور پر 160 روپے کماتا ہے. لیکن اگر وہ میز کو 12%منافع پر بیچتا ہے اور 16%نقصان پر اس کتاب کو فروخت کرتا ہے تو اسے 40 روپے کا نقصان ہوتا ہے. ایک کتاب کی قیمت (روپے میں) تلاش کریں

A.4200
A.4200
A.4200

B.4100
B.4100
B.4100

C.4300
C.4300
C.4300

D.4000
D.4000
D.4000

Answer: D.4000
D.4000
D.4000

111

जर $\frac{1}{3}+\frac{1}{2}+\frac{1}{x}=4$, तर x= ?

If $\frac{1}{3}+\frac{1}{2}+\frac{1}{x}=4$, then x= ?

اگر $\frac{1}{3}+\frac{1}{2}+\frac{1}{x}=4$ تو x= ؟

(A) $\frac{5}{18}$

(B) $\frac{6}{19}$

(C) $\frac{18}{5}$

(D) $\frac{24}{11}$

Answer: (B) $\frac{6}{19}$

112	(281 × 15 × 16 × 18) या गुणाकारामधील एकक स्थानचा अंक: The unit digit in the product (281 × 15 × 16 × 18) is: حاصل ضرب(281 × 15 × 16 × 18)میں یونٹ ہندسہ ہے؟
	A.6 A.6 A.6
	B.0 B.0 B.0
	C.5 C.5 C.5
	D.8 D.8 D.8
Answer:	B.0 B.0 B.0

113	Out of the given options, choose the most appropriate one to fill in the blank. The dog _____the sheep.
	A.chased
	B.have chase
	C.have chased
	D.has chase
Answer:	A.chased

114 प्रति वर्ष सरळ व्याज दराने, एका विशिष्ट रकमेवर 10 वर्षांसाठीचे व्याज हे त्या रकमेच्या 2/5 एवढे आहे. सरळ व्याजाचा दर काय आहे:

At the rate of simple interest per annum, the interest on a certain sum of money for 10 years will be 2/5 part of the amount. The rate of simple interest is:

سالانہ سود مفرد کی در سے، ایک مخصوص مبلغ رقم پر دس سال میں منافہ 2/5 رقم کا حصہ ہوگا . سود مفرد کی در ہے:

(A) $4\frac{1}{2}\%$

(B) 5%

(C) $6\frac{2}{3}\%$

(D) $3\frac{2}{3}\%$

Answer: (C) $6\frac{2}{3}\%$

115 खालीलपैकी सर्वांत मोठा अपूर्णांक शोधा

Find the largest of the following fractions

مندرجہ ذیل کسور میں سے سب سے بڑی کسر تلاش کریں

A.9/26
A.9/26
A.9/26

B.63/181
B.63/181
B.63/181

C.78/521
C.78/521
C.78/521

D.24/89
D.24/89
D.24/89

Answer:	B.63/181 B.63/181 B.63/181

116	‘सत्यर्थ प्रकाश' चे लेखक कोण आहेत? Who is the author of ‘Satyartha Prakash’? ستیارتھا پرکاش' کے مصنف کون ہے؟
	A.स्वामी दयानंद सरस्वती A.Swami Dayanand Saraswati A. سوامی دیانند سرسوتی
	B.स्वामी विवेकानंद B.Swami Vivekanand B. سوامی ویویکانند
	C.राजा राम मोहन रॉय C.Raja Ram Mohan Roy C. راجہ رام موہن رائے
	D.मदन मोहन मालवीय D.Madan Mohan Malviya D. مدن موہن مالویہ
Answer:	A.स्वामी दयानंद सरस्वती A.Swami Dayanand Saraswati A. سوامی دیانند سرسوتی

117 निर्देश: खाली दिलेले प्रश्न वर्ण मालिकेवर आधारित आहेत. या प्रत्येक मालिकेत, काही अक्षरे गहाळ आहेत. योग्य पर्याय निवडा पाच पेक्षा अधिक अक्षरे गहाळ असल्यास, मालिकेतील शेवटचे पाच अक्षरे निवडा.

AB - D - - B - DM - - X - -

DIRECTION: Questions given below are based on the letter series. In each of these series, some letters are missing. Select the correct alternative. If more than five letters are missing, select the last five letters of the series:

AB - D - - B - DM - - X - -

ہدایت نیچے دے ہے سوالات حرف سرج پر مشتمل ہیں . ہر میں کہیں حرف گمشدہ ہے . سہی اختیارات کو چنے . اگر پچ حرف گنمام ہو تو آخری پانچ حرفونکو چنے

AB - D - - B - DM - - X - -

A.ABMDX
A.ABMDX
A.ABMDX

B.ABXDM
B.ABXDM
B.ABXDM

C.AXDBM
C.AXDBM
C.AXDBM

D.ABXMD
D.ABXMD
D.ABXMD

Answer: B.ABXDM
B.ABXDM
B.ABXDM

118 दोन संख्यांचा लसावी आणि मसावी अनुक्रमे 1800 आणि 120 आहे, जर त्यापैकी एक संख्या 480 असेल. तर दुसरी संख्या:

The LCM & HCF of two number is 1800 and 120 respectively, if one of the numbers is 480. The other number is:

دو نمبروں کے ایل سی ایم اور ایچ سی ایف بالترتیب 1800 اور 120 ہے، اگر ایک نمبر 480 ہے. دوسرا نمبر یہ ہے:

A.410
A.410
A.410

B.420
B.420
B.420

C.430
C.430
C.430

D.450
D.450
D.450

Answer: D.450
D.450
D.450

119 खालील आकृतीमध्ये, ∠POR आणि ∠QOR मधून एकरेषीय जोडी तयार होते. जर a-b = 80°, तर 'a' आणि 'b' चे मूल्य काढा:

In the following figure, ∠POR and ∠QOR form a linear pair. If a-b = 80°, the value of 'a' and 'b':

مندرجہ شکل میں، ∠POR اور ∠QOR ایک لینئر جوڑی تشکیل دیتے ہیں اگر a-b = 80°، 'a' اور 'b' کی قیمت:

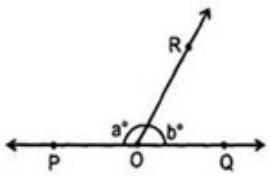

(A) a = 125°, b = 55°

(B) a = 110°, b = 70°

(C) a = 130°, b = 50°

(D) a = 75°, b = 105°

Answer: (C) a = 130°, b = 50°

120	खालील पैकी कोणते पूर्ण वर्ग नाही? Which of the following is not a perfect square? مندرجہ ذیل میں سے کون ایک درست مربع نہیں ہے؟
	A.48841 A.48841 A.48841
	B.55225 B.55225 B.55225
	C.32041 C.32041 C.32041
	D.32043 D.32043 D.32043
Answer:	D.32043 D.32043 D.32043

121	गुणाकार करा: 465 × 64 = ? Multiply: 465 × 64 = ? ضرب دیں: 465 × 64 = ?
	A.36470 A.36470 A.36470
	B.28700 B.28700 B.28700
	C.24780 C.24780 C.24780

D.29760
D.29760
D.29760

Answer: D.29760
D.29760
D.29760

122 Out of the given four words only one is not spelt correctly. Find the word that is not correctly spelt.

A.Assasinatione

B.Commitment

C.Conscience

D.Controversy

Answer: A.Assasinatione

123 जेव्हा हानी न पोहोंचलेल्या रक्त्याच्या वाहिनीमध्ये गठ्ठा झाला तर काय होते।?

What happens when a clot occurs in an undamaged blood vessel?

جب کسی خون کی رگ میں کلاٹ ہوجائے تو کیا ہوگا؟

A.आपला मृत्यू होईपर्यत रक्तस्राव होईल
A.You would bleed to death
A.آپ کو موت کی خون کرے گا

B.त्वचेच्या पृष्ठभागावर खपली तयार होईल
B.A scab will form on the skin surface
B. ایک کھرنڈ جلد کی سطح پر قائم کرے گا

C.प्लैटलेट्स कापलेल्या भागाच्या कडेला चिकटून एकमेकांना जोडल्या जाऊन कापलेला भाग बंद होईल
C.Platelets stick to the edges of the cut and to one another, forming a plug
C. پلیٹلیٹس کٹی ہوئی جگہ پر جمع ہو جائیں گے اور ایک پلگ کا قیام کر ینگے

D.गठ्ठ्याच्या बाहेर असलेल्या ऊतकांसोबत रक्त वाहून जाऊ शकते
D.The flow of blood to tissues beyond the clot may be cut off
D. جمنے سے آگے ؤتکوں میں خون کے بہاؤ کو کاٹ کیا جا سکتا ہے

Answer: D.गठ्ठ्याच्या बाहेर असलेल्या ऊतकांसोबत रक्त वाहून जाऊ शकते
D.The flow of blood to tissues beyond the clot may be cut off
D. جمنے سے آگے ؤتکوں میں خون کے بہاؤ کو کاٹ کیا جا سکتا ہے

124 दिलेली अदलाबदल : चिन्हे ÷ आणि ×, तसेच आकडे 2 आणि 8; तर 4 × 8 ÷ 2 चे मूल्य किती ?

Given interchanges: signs ÷ and ×, and numbers 2 and 8; then the value of 4 × 8 ÷ 2 is

دیئے گئے تبادلے: علامات ÷ اور ×، اور نمبر 2 اور 8؛ تو 4 × 8 ÷ 2کی تعداد ہے

A.4
A.4
A.4

B.8
B.8
B.8

C.12
C.12
C.12

D.16
D.16
D.16

Answer: D.16
D.16
D.16

125 अमिनो आम्ले ही _____यामध्ये अस्तित्त्वात असतात –

Amino Acids are present in –

_____ میں امینو ایسڈ موجود ہوتے ہیں

A.स्टार्च
A.Starch
A.اسٹارچ

B.मेद
B.Fats
B.چربی

C.प्रथिने
C.Proteins
C. پروٹین

D.जीवनसत्त्वे
D.Vitamins
D.وٹامن

Answer:

C.प्रथिने
C.Proteins
C. پروٹین

126

सूचना : खालील प्रत्येक प्रश्नात दोन विधाने I आणि II दिलेले आहेत. हे विधान एकतर स्वतंत्र कारण असू शकतात किंवा स्वतंत्र कारणांचे परिणाम असू शकतात. यांपैकी एक विधान इतर विधानाचा परिणाम असू शकतो. दोन्ही विधाने वाचा आणि खालीलपैकी कोणत्या उत्तराचा पर्याय या दोन्ही विधानांमधील संबंधांचे वर्णन करतो ते ठरवा.

विधान :
I. बहुतेक लोक शनिवारी आणि रविवारी धार्मिक स्थळांमध्ये जातात.
II. खूप कमी लोक आठवड्यातील कामकाजाच्या दिवशी धार्मिक स्थळांना भेट देतात.

DIRECTIONS: Below in each question are given two statements I and II. These statements may be either independent causes or may be effects of independent causes. One of these statements may be the effect of the other statement. Read both the statements and decide which of the following answer choice correctly depicts the relationship between these two statements.

Statements:
I. Majority of the people go to religious places on Saturday and Sunday.
II. Very few people visit religious places on weekdays.

زاد وجوہات یا پھر آزاد وجوہات کے اثرات ہو سکتے ہیں۔ ان دیے گئے ہیں۔ یہ بیانات یا تو آ II اور I ہدایات: نیچے ہر سوال میں دو بیانات بیانات میں سے ایک بیان دوسرے کا اثر ہو سکتا ہے۔دونوں بیانات پڑھیں اور فیصلہ کریں کہ نیچے دیے گئے کس جواب کا انتخاب ان دونوں بیانات کے در میان تعلق کو ٹھیک سے ظاہر کرتا ہے۔

بیانات:
I –لوگوں کی اکثریت ہفتے اور اتوار کو مذہبی مقامات پر جاتی ہے۔
II ۔ بہت کم لوگ ہفتے کے دوران مذہبی مقامات پر جاتے ہیں۔

A.विधान I कारण आहे आणि विधान II त्याचा परिणाम आहे;
A.Statement I is the cause and statement II is its effect;
A.بیان نمبر I وجہ ہے اور بیان نمبر II اس کا اثر ہے۔

B.विधान II कारण आहे आणि विधान I त्याचा परिणाम आहे;
B.Statement II is the cause and statement I is its effect;
B.بیان نمبر II وجہ ہے اور بیان نمبر I اس کا اثر ہے۔

C.विधान I आणि II दोन्ही स्वतंत्र कारणे आहेत;
C.Both the statements I and II are independent causes;
C.دونوں بیانات نمبر I اور نمبر II آزاد وجوہات ہیں۔

D.विधान I आणि II दोन्ही काही सामान्य कारणांचे परिणाम आहेत;
D.Both the statements I and II are effects of some common cause
D.دونوں بیانات نمبر I اور نمبر II کسی ایک وجہ کے اثرات ہیں۔

Answer: D.विधान I आणि II दोन्ही काही सामान्य कारणांचे परिणाम आहेत;
D.Both the statements I and II are effects of some common cause
D.دونوں بیانات نمبر I اور نمبر II کسی ایک وجہ کے اثرات ہیں۔

127

जर $\frac{m}{n}=\frac{12}{10}$, $\frac{m^2+n^2}{m^2-n^2}$ चे मूल्य काढा:

If $\frac{m}{n}=\frac{12}{10}$, find the value of $\frac{m^2+n^2}{m^2-n^2}$:

اگر $\frac{m}{n}=\frac{12}{10}$ تو $\frac{m^2+n^2}{m^2-n^2}$ کی قیمت معلوم کریں:

(A) $5\frac{6}{11}$

(B) $6\frac{6}{11}$

(C) $7\frac{6}{11}$

(D) $9\frac{6}{11}$

Answer: (A) $5\frac{6}{11}$

128

खालील प्रश्नामध्ये प्रश्न चिन्हाच्या (?) जागी काय यायला हवे?

What should come in place of the question mark (?) in the following question?

ذیل کے دیئے ہوئے سوالات میں سوالیہ نشان (?) کی جگہ کیا آئے گا۔

$8\frac{1}{6}+4\frac{1}{6}-2\frac{1}{6}=?$

(A) $8\frac{1}{6}$

(B) $9\frac{1}{6}$

(C) $\frac{61}{6}$

(D) $11\frac{1}{6}$

Answer: (C) $\frac{61}{6}$

129 रांगेत अनिमा उजवीकडून बाराव्या आणि डावीकडून चौथ्या स्थानावर आहे. तर या रांगेत 30 मुले होण्यासाठी किती मुलांचा समावेश करावा लागेल.

If Anima finds that she is twelfth from the right and fourth from the left, how many boys should be added to the queue so that there are 30 boys in the line?

اگر انما نے دیکھا کہ وو دھانیں سے بھاروی اور بھانیں سے چوتھی ہے، کتنے لڑکے جمہ کرنے ہے تاکہ کتار میں 30 بچھے ہو؟

A.12
A.12
A.12

B.15
B.15
B.15

C.14
C.14
C.14

D.20
D.20
D.20

Answer: B.15
B.15
B.15

130 जर कोन हा त्याच्या पूरक कोनाच्या चार-पंचमांश असेल, तर त्या कोनाचे माप काढा?

If an angle equal four-fifth of its supplement, then find the measurement of the angle?

اگر زاویہ اپنے ضمیمہ کے چار - پانچویں حصے کے برابر ہے، تو زاویہ کی پیمائش تلاش کریں؟

A.70°
A.70°
A.70°

B.80°
B.80°
B.80°

C.90°
C.90°
C.90°

D.85°
D.85°
D.85°

Answer: B.80°
B.80°
B.80°

131 **सूचना**: दिलेल्या चारांपैकी वेगळी (असंबद्ध) असणारी आकृती शोधून काढा.

DIRECTIONS: Find the odd from the given four figures.

ہدایات: نیچے دی گئی چار شکلوں میں طاق کونسی ہے؟

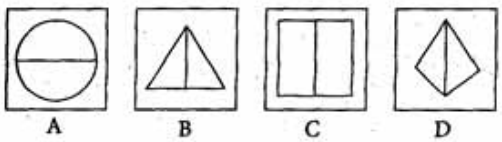

A. (A)

B. (B)

C. (C)

D. (D)

Answer: A. (A)

132	$27^3 = 3^?$ असल्यास, x = ? If $27^3 = 3^?$, then x =? $27^3 = 3^?$ میں x کا مان ہوگا
	A. 3
	B. 9
	C. 0
	D. 2
Answer:	B. 9

133	324 × 821 = ? 324 × 821 = ? ? =821×324
	A.288564 A.288564 A.288564
	B.288404 B.288404 B.288404
	C.266004 C.266004 C.266004
	D.244504 D.244504 D.244504
Answer:	C.266004 C.266004 C.266004

134 निरक्षरतेविरूद्ध लढा देण्यात या देशाने प्रचंड प्रगती केलेली असून सुद्धा, अजूनही — शिल्लक आहेत

Despite the tremendous progress which has been made in combatting illiteracy in this country, there still remains—

اس ملک میں جہالت کے خاتمے میں زبردست ترقی کے باوجود، اب بھی باقی رہتا ہے.

A.ग्रामीण भागांपेक्षा अ-ग्रामीण भागांमध्ये अधिक निरक्षरता
A.More illiteracy in non-rural than rural areas
A.دیہی علاقوں کے مقابلے میں غیر دیہی علاقوں میں مزید جہالت

B.इतर जातींपेक्षा अनुसूचित जाती व जमातींमध्ये अधिक निरक्षरता
B.More illiteracy in Scheduled castes and tribes than the other castes
B. دیگر ذاتوں کے مقابلے میں طے شدہ کردہ ذاتوں اور قبیلے میں جہالت

C.14 ते 25 वयाच्या मधील निरक्षरता प्रमाण फक्त 20 टक्के आहे
C.Only 20 per cent illiteracy rate between the ages of 14 and 25
C.14 اور 25 سال کی عمر میں صرف 20 فی صد جہالت کی شرح

D.स्त्रीयांमध्ये निरक्षरतेचे प्रमाण उच्च पातळीचे आहे
D.A high level of illiteracy among women
D. خواتین کے درمیان جہالت کی ایک اعلی سطح

Answer: B.इतर जातींपेक्षा अनुसूचित जाती व जमातींमध्ये अधिक निरक्षरता
B.More illiteracy in Scheduled castes and tribes than the other castes
B. دیگر ذاتوں کے مقابلے میں طے شدہ کردہ ذاتوں اور قبیلے میں جہالت

135 भविष्यातल्या कामगिरीचा अंदाज लावण्यासाठी वैयक्तिक क्षमतेला मोजण्यासाठी चाचणी म्हणजे

Tests meant to measure individual’s potential to predict future performance

وہ ٹسٹ جس کا مقصد کسی فرد کی مستقبل کی انجام دہی کے بارے میں پیشین گوئی کرنے کی امکانی صلاحیت کو جانچنا ہو، وہ کہلاتا ہے:

A.प्रकरण अध्ययन
A.Case Study
A.کیس اسٹڈی

B.आकलन
B.Cognition
B.(کوگنیشن واقفیت)

C.योग्यता चाचण्या
C.Aptitude tests
C.لیاقت ٹسٹ

D.योग्यता
D.Aptitude
D.لیاقت

Answer: C.योग्यता चाचण्या
C.Aptitude tests
C.لیاقت ٹسٹ

136 विधान:
समाजाच्या उच्च थरावर राहणारी लोक आरक्षणाचा लाभ घेत आहेत आणि सर्वसाधारण वर्गातील लोकांमध्ये संतापाची वाढ होत आहे.

कृतीचा कोर्स:
I. प्रतिवर्षी 12 लाखांपेक्षा अधिक उत्पन्न असलेल्या कुटुंबांच्या मुलांना आरक्षण नाकारा.
II. ज्या मुलांचे पालक, मंत्री, सिव्हिल सर्व्हंट्स, सैन्य अधिकारी इ.आहेत त्यांना आरक्षण नाकारा.

Statement:
People belonging to creamy layer of society are taking advantage of reservation and resentment is increasing among people belonging to general category.

Course of actions:
I. Deny reservation to children of families earning more than 12 lakhs per annum.
II. Deny reservation to children whose parents are Ministers, Civil Servants, Army Officers, etc.

بیان:
انڈیا میں معاشرے کے اونچے طبقے کے افراد بکنگ کا فائدہ اٹھا رہے ہیں اور عام طبقے کے افراد میں نفرت بڑھ رہی ہے۔

لائحہ عمل:
I۔ 12 لاکھ سالانہ سے زائد آمدنی والے خاندانوں کے بچوں کو بکنگ نہ دی جائے۔
II۔ منسٹرز، سول سرونٹس ، آرمی آفیسرز وغیرہ کے بچوں کو بکنگ نہ دی جائے۔

A.फक्त I अनुसरून आहे
A.Only I follows
A. صرف I لاگو ہو گا۔

B.फक्त II अनुसरण करते आहे
B.Only II follows
B. صرف II لاگو ہو گا۔

C.एकतर I किंवा II अनुसरून आहे
C.Either I or II follows
C. I یا II میں سے ایک لاگو ہو گا۔

D.I किंवा II दोन्हीपैकी काहीही अनुसरण करत नाही
D.Both I and II follow
D. I اور II دونوں لاگو ہوں گے۔

Answer: D.I किंवा II दोन्हीपैकी काहीही अनुसरण करत नाही
D.Both I and II follow
D. I اور II دونوں لاگو ہوں گے۔

137 प्रश्नासाठी सूचना: खालील मालिका पूर्ण करा.

BY, CX, EV, HS, LO,____

DIRECTION: Complete the following series.

BY, CX, EV, HS, LO,____

سوال کے لیے ہدایت:مندرجہ ذیل سیریز کو مکمل کریں۔

BY, CX, EV, HS, LO____

A.JV
A.JV
A.JV

B.MN
B.MN
B.MN

C.PL
C.PL
C.PL

D.LS
D.LS
D.LS

Answer: B.MN
B.MN
B.MN

138 पुढील म्हण पूर्ण करा - ‘अंथरूण पाहून --------- ---------.’

A.झोपी जावे.

B.झटकून घ्यावे.

C.पाय पसरावे.

D.पांघरूण घ्यावे.

Answer: C.पाय पसरावे.

139 आपण जर सहा काप करून घन कापले तर असे किती लहान घन मिळतात, जे X, Y आणि Z या तीन बाजूंमध्ये समान प्रकारे वितरीत आहेत?

How many small cubes are obtained when we cut the cube using six cuts, which are distributed evenly in the three planes X, Y and Z?

تینوں پلین میں ایک جیسے لگائے جائیں تو کیوب سے کتنے چھوٹے ٹکڑے حاصل X، Y، Z جب ہم کیوب میں 6 کٹ لگاتے ہیں جو ہوتے ہیں؟

A.9
A.9
A.9

B.6
B.6
B.6

C.8
C.8
C.8

D.27
D.27
D.27

Answer: D.27
D.27
D.27

140 20 ही संख्या 80 च्या किती टक्के आहे?

20 is what percentage of 80?

80؟ میں سے 20 کتنے فیصد ہے

A.43%

A.43%

A.43%

B.27%

B.27%

B.27%

C.28%

C.28%

C.28%

D.25%

D.25%

D.25%

Answer: D.25%

D.25%

D.25%

141 'KALEIDOSCOPE’ पासून खालील शब्दांपैकी कोणते शब्द तयार केले जाऊ शकत नाहीत?

Which of the following words cannot be formed from 'KALEIDOSCOPE’?

'KALEIDOSCOPE’ سے نہیں بنایا جاسکتا ہے؟ مندرجہ ذیل الفاظ میں سے کونسا

A.SCALE
A.SCALE
A.SCALE

B.PADLOCK
B.PADLOCK
B.PADLOCK

C.PACKET
C.PACKET
C.PACKET

D.DIESEL
D.DIESEL
D.DIESEL

Answer: C.PACKET
C.PACKET
C.PACKET

142 सूचना: प्रत्येक प्रश्नाला एक प्रमुख विधानासोबत चार विधाने आहेत ज्यांच्याखाली A, B, C, आणि D असे चार विधान आहेत. क्रमवार विधानांची जोडी निवडा ज्यामध्ये प्रथम विधान दुसऱ्या विधानाला सुचवते, आणि दोन्ही विधाने तर्किकदृष्ट्या प्रमुख विधानासोबत निगडित असेल.

शेजारचा देश एकतर शत्रू आहे किंवा मित्र आहे.
A. शेजारचा देश शत्रू आहे.
B. शेजारचा देश शत्रू नाही.
C. शेजारचा देश मित्र आहे.
D. शेजारचा देश मित्र नाही.

DIRECTIONS: Each question has a main statement followed by four statements labelled A, B, C and D. Choose the ordered pair of statements, where the first statement implies the second, and the two statements are logically consistent with the main statement.

The neighboring country is either enemy or friend
A.The neighboring country is an enemy
B.The neighboring country is not an enemy
C.The neighboring country is a friend
D. The neighboring country is not a friend

ہدایت: ہر سوال میں ایک جملہ ہے جسکے بعد چار جملےاے، بی،سی اور ڈی کے نام سے دئے گئے ہیں اسمیں منسلک جوڑیوں کو چنئے۔ جہاں پہلا جملہ دوسرے جملہ کی اور اشارہ کر رہا ہے اور دو جملے منطقی مرکزی بیان کے مطابق ہیں

ہمسایہ ملک یا تو دشمن ہے یا دوست
Aہمسایہ ملک دشمن ہے ۔
Bہمسایہ ملک دشمن نہیں ہے ۔
Cہمسایہ ملک دوست ہے ۔
Dہمسایہ ملک دوست نہیں ہے ۔

A.AC
A.AC
A.AC

B.DA
B.DA
B.DA

C.CB
C.CB
C.CB

D.AB
D.AB
D.AB

Answer: B.DA
B.DA
B.DA

143 **सूचना**: खालील प्रश्नात उत्तरातील पर्यायांपैकी कोणत्या पर्यायी आकृतीत प्रश्नातील आकृती अंतर्भूत आहे?

DIRECTIONS: In the given question find the answer figure in which question figure is embedded.

ہدایات: دیئے گئے سوال میں، جواب کی شکل کو دریافت کیجیئے جو سوال میں سرایت کر گئی ہے۔

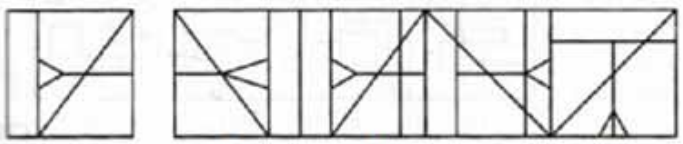

A. (A)

B. (B)

C. (C)

D. (D)

Answer: B. (B)

144 ‘एका विशिष्ट सांकेतिक भाषेमध्ये, जर CUSTOMER हा शब्द RCEUMSOT असा कूटबध्द केला जात असेल, IMMACULATE हा शब्द त्या भाषेमध्ये कसा कूटबध्द केला जाईल?

‘In a certain code language, if the word CUSTOMER is coded as RCEUMSOT, then how is the word IMMACULATE coded in that, language?

ایک مخصوص ضابطے کی زبان میں، اگر لفظ CUSTOMER کو RCEUMSOT لکھاجاتاہے، تو اس زبان میں لفظ IMMACULATE کو کیسے لکھاجائیگا؟

A.EITMMALAUC
A.EITMMALAUC
A.EITMMALAUC

B.EITMAMLAUC
B.EITMAMLAUC
B.EITMAMLAUC

C.ETEMAMALUC
C.ETEMAMALUC
C.ETEMAMALUC

D.EITMMALUAC
D.EITMMALUAC
D.EITMMALUAC

Answer: B.EITMAMLAUC
B.EITMAMLAUC
B.EITMAMLAUC

145 सूचना: खालील प्रश्नांमध्ये दिलेल्या पर्यायांमधून संबंधित अक्षर/शब्द/संख्या निवडा.

16 : 4 :: ? : 7

DIRECTIONS: In the following question, select the related letter/word/number from the given alternatives.

16 : 4 :: ? : 7

سمت: مندرجہ ذیل سوال میں، دیے گئے متبادل سے متعلقہ حرف/لفظ/نمبر منتخب کریں۔

16 : 4 :: ? : 7

A.30
A.30
A.30

B.35
B.35
B.35

C.49
C.49
C.49

D.45
D.45
D.45

Answer: C.49
C.49
C.49

146 मुलाच्या समाजीकरणाच्या संदर्भाने वर्तणुक विशेषज्ञासाठी खालीलपैकी विचारांचा कोणता एक मुद्दा योग्य आहे?

Which one of the following points of views is suited to behaviorists in context of socialization of a child?

بچے کی معاشرت کے تناظر میں رویے والوں کے لئے،مندرجہ ذیل نقطہ نظروں میں سے کون سا نقطہ نظرمناسب ہے؟

A.पर्यावरणभिमुख
A.Environment-oriented
A.ماحولیات پر مبنی

B.पलायनवादभिमुख
B.Escapism-oriented
B.فرار پر مبنی

C.सहजप्रवृत्त
C.Instinctive
C.جذباتی

D.अनुवंशिकतेवर आधारित
D.Based on Heredity
D.وراثت کی بنیاد پر

Answer: A.पर्यावरणभिमुख
A.Environment-oriented
A.ماحولیات پر مبنی

147 गतीमंद आणि अपंग मुलांच्या विशेष शिक्षणासाठी सुविधा पुरविण्यासाठी साधारणपणे अर्थसहाय्य — द्वारे दिले जाते

Provisions for the special education of retarded and handicapped children is usually financed by—

ریٹارڈ اور معذور بچوں کی خصوصی تعلیم کے لئے عام طور پر فنڈز فراہم کیے جاتے ہیں.

A.नियमित राज्य सहायता मिळणारे स्थानिक निधी
A.Local funds with the usual state aid
A.عام طور پر ریاستی امداد کے ساتھ مقامی فنڈز

B.विशेष राज्य निधी
B.Special state fund
B.خصوصی ریاستی فنڈ

C.विशेष राज्य सहायता मिळणारे स्थानिक निधी
C.Local funds with special state aid
C.خصوصی ریاستی امداد کے ساتھ مقامی فنڈز

D.स्थानिक आणि राज्य निधी विशेष मूल्यांकनासह ज्यासाठी पालक किंवा धर्मादाय संस्था पैसे भरतात
D.Local and state funds with special assessment to be paid by parents or charitable organizations
D.والدین یا خیراتی اداروں کی طرف سے ادا کردہ خصوصی تشخیص کے ساتھ مقامی اور ریاستی فنڈز

Answer: C.विशेष राज्य सहायता मिळणारे स्थानिक निधी
C.Local funds with special state aid
C.خصوصی ریاستی امداد کے ساتھ مقامی فنڈز

148 घर म्हणजे मुलाची पहिली शाळा आहे'. त्यामुळे

The home is the child's first school'. Therefore—-

--گھر بچے کا پہلا اسکول ہے.لہذا

A.सर्व पालक महाविद्यालयीन पदवीधर असायला हवेत
A.All parents should be college graduates
A. تمام والدین کو کالج گریجویٹ ہونا چاہئے

B.मुलांना नर्सरी शाळेत जाण्याची गरज नाही
B.Children need not attend nursery school
B. بچوں کو نرسری اسکول میں داخلہ لینے کی ضرورت نہیں ہے

C.मुलांना ते 6 वर्षांचे झाल्याशिवाय सार्वजनिक शाळेत प्रवेश देऊ नये
C.Children should not be admitted to a public school until they are 6
C.جب تک بچے 6 کے نہ ہو جائیں،ان کو ایک سرکاری اسکول میں داخل نہیں ہونا چاہئے

D.शाळा व महाविद्यालयांनी पालक शिक्षण आणि बाल संगोपनाचे अभ्यासक्रम सुरू केले पाहिजेत
D.Schools and colleges should offer courses in parental education and child care.
D.اسکولوں اور کالجوں کو والدین کی تعلیم اور بچے کی دیکھ بھال کا کورس متعارف کرانا چاہئے.

Answer: D.शाळा व महाविद्यालयांनी पालक शिक्षण आणि बाल संगोपनाचे अभ्यासक्रम सुरू केले पाहिजेत
D.Schools and colleges should offer courses in parental education and child care.
D.اسکولوں اور کالجوں کو والدین کی تعلیم اور بچے کی دیکھ بھال کا کورس متعارف کرانا چاہئے.

149 विकृत या शब्दाचे सर्वांत योग्य वर्णन करणारी व्याख्या कोणती

Which definition more closely describes the word the abnormal

لفظ غیر معمولی کی سب سے زیادہ قریب تشریح کس سے ہوتی ہے

A.यात एखाद्या स्पष्टपणे परिभाषित दर्जा किंवा नियमापासून विचलित होणे
A.It implies deviation from some clearly defined norm or standards
A.یہ کچھ واضح قانون یا معیار سے انحراف کو نافذ کرتا ہے

B.समाजातील संभाव्य कमकुवत व्यक्ती
B.Potentially weak person in the society
B.سماج میں ممکنہ طور ہر کمزور فرد

C.a व b
C.a and b
C.a اور b

D.यांपैकी कोणतीही नाही
D.None of these
D.درج بالا میں سے کوئی نہیں

Answer: A.यात एखाद्या स्पष्टपणे परिभाषित दर्जा किंवा नियमापासून विचलित होणे
A.It implies deviation from some clearly defined norm or standards
A.یہ کچھ واضح قانون یا معیار سے انحراف کو نافذ کرتا ہے

150 DIRECTIONS: A sentence with an underlined phrasal verb is given below. Out of the four options, choose the one which can be substituted for the given phrasal Verb.
The minister gave away the prizes.

A.distributed

B.kept

C.listed

D.discarded

Answer: A.distributed

151 ‘ हत्ती ’ या शब्दाचा समानार्थी शब्द कोणता ?

A.गज

B.कुंजर

C.नाग

D.वरील सर्व

Answer: D.वरील सर्व

152 एका फोटोकडे बोट दाखवून एक स्त्री म्हणते “तो माझ्या सासूच्या एकुलत्या मुलाच्या मुलीचा भाऊ आहे” मग तो पुरुष आणि त्या स्त्रीचे नाते काय?

Pointing to a photograph a woman says: “He is the brother of the daughter of my mother-in-law’s only son”. How is the man related to the woman?

تصویر کی طرف اشارہ کرکے عورت نے کہا: " یے میری ساس کے واحد بیٹے کی بیٹی کا بھائی ہے." آدمی کا عورت سے کیا رشتہ تھا؟

A.मुलगा
A.Son
A.بیٹا

B.भाऊ
B.Brother
B.بھائی

C.मेव्हणा
C.Brother-in-law
C.جی جا

D.पुतण्या
D.Nephew
D.بتیجا

Answer: A.मुलगा
A.Son
A.بیٹا

153 जर Aयाचा अर्थ '+' आहे ,B याचा अर्थ '-', 'C' याचा अर्थ '×',आहे ,तर खालील समीकरणाचे मूल्य काय आहे?

If A stands for '+', B stands for '–', C stands for '×', what is the value of:

اگر A '+' کے قائم مقام ہو، B '-' کے قائم مقام ہو، C '×' کے قائم مقام ہو تو
کی ویلیو کیا ہوگی؟

(10 C 4) A (4 C 4) B 6 ?

A. 46

B. 50

C. 56

D. 60

Answer: B. 50

154 निर्देश: खाली दिलेल्या प्रतीक-अक्षर-संख्यांच्या क्रमाचा संदर्भ घेणार्या या प्रश्नांची उत्तरे द्या:

2 P J @ 8 $ L B 1 V # Q 6 & G W 9 K C D 3 ≥ * E 5 F R 7 A Y 4

दिलेल्या पर्यायांपैकी कोणते संख्या \अक्षर वर दिलेल्या व्यवस्थेच्या डावी कडून 7 व्या संख्या \अक्षर च्या डाव्या बाजूने 4 थे आहे?

DIRECTION: Answer these questions referring to the symbol-letter-number sequence given below:

2 P J @ 8 $ L B 1 V # Q 6 & G W 9 K C D 3 ≥ * E 5 F R 7 A Y 4

Which of the following is the fourth to the left of the seventh from the left end of the above arrangement?

ہدایت جیل کے سوال دے ہے نشانو اور نمبرس اور لفجونپر مشتمل ہیں

2 P J @ 8 $ L B 1 V # Q 6 & G W 9 K C D 3 ≥ * E 5 F R 7 A Y 4

الٹے ہاتھ سے ساتوے حرف کے الٹے ہاتھ سے چوتھا ا حرف کونسا ہے ؟

A.7
A.7
A.7

B.5
B.5
B.5

C.J
C.J
C.J

D.8
D.8
D.8

Answer: C.J
C.J
C.J

155 वाईनच्या कंटेनरमधून, चोराने 15 लिटर वाईन चोरली आणि त्याच्या मध्ये तेवढेच पाणी मिसळले. त्याने हिच प्रक्रिया पुन्हा केली. त्यामुळे तीन प्रयत्नांमध्ये वाईन आणि पाण्याचे गुणोत्तर 343 : 169 झाले. सुरवातीला कंटेनरमधील वाईनचे प्रमाण किती होते

From a container of wine, a thief has stolen 15 liters of wine and repalced it with same quantity of water. He again repeated the same process. Thus in three attempts the ratio of wine and water become 343 : 169. The initial amount of wine in the container was

شراب کے ایک کنٹینر سے، چور نے 15 لیٹر شراب کو چرا لیا اور اتنی ہی مقدار پانی واپس ڈال دیا۔ اس نے دوبارہ یہی عمل کیا۔ اس طرح تین کوششوں میں شراب اور پانی کا تناسب 343: 169. کنٹینر میں شراب کی ابتدائی مقدار کتنی تھی

A.75 लिटर्स
A.75 liters
A.75 لیٹر

B.100 लिटर्स
B.100 liters
B.100 لیٹر

C.150 लिटर्स
C.150 liters
C.150 لیٹر

D.120 लिटर्स
D.120 liters
D.120 لیٹر

Answer: D.120 लिटर्स
D.120 liters
D.120 لیٹر

156	बेंजामिन नेतन्याहु हे _____आहेत Benjamin Netanyahu is the – بنجامن نیتن یاہو _____ ہیں
	A.इस्राएलचे पंत प्रधान A.Prime Minister of Israel A.اسرائیل کے وزیراعظم
	B.सीरियाचे राष्ट्राध्यक्ष B.President of Syria B.شام کے صدر
	C.सीरियाचे पंत प्रधान C.Prime Minister of Syria C.شام کے وزیر اعظم
	D.इस्राएलचे राष्ट्रपती D.President of Israel D.اسرائیل کے صدر
Answer:	A.इस्राएलचे पंत प्रधान A.Prime Minister of Israel A.اسرائیل کے وزیراعظم

157 सूचना: अर्थपूर्ण परिच्छेद निर्माण करण्यासाठी, खाली दिलेली (P), (Q) (R), (S) आणि (T) ही पाच वाक्ये योग्य अनुक्रमाने पुनर्रचना करा; त्यांनतर खालील प्रश्नांची उत्तर द्या.
P. श्रीकृष्णाने आपले सर्व मित्र जमविले
Q. त्यांच्या बाल खोडीमध्ये ते एवढे तल्लीन होते, कि यशोदा घरी परत आल्याचे त्यांच्या लक्षातही आले नाही.
R. प्रत्येकजण जीव मुठीत धरून पळून गेले आणि कृष्णाची चांगलीच पिटाई झाली.
S. एके दिवशी यशोदा काही महत्वाच्या कामासाठी घराबाहेर पडली.

पुनर्रचना केल्यानंतर खालीलपैकी कोणते वाक्य चौथे असेल?

DIRECTION: Rearrange the following five sentences (P), (Q), (R), (S) and (T) in the proper sequence to form a meaningful paragraph; then answer the questions given below them.
P. Shri Krishna gathered all his friends.
Q. Engrossed in their mischief, they did not realize when Yashoda had come back home.
R. Everybody else ran for their lives and Krishna got a good thrashing.
S. One day Yashoda left home for some important work.
T. With their help, he reached the pitcher of the butter and they all had a good time eating it.

Which of the following should be the FOURTH sentence after rearrangement?

ہدایات: ان پانچ جملوں (P)، (Q)، (R)، (S) اور (T) کو با معنی پیرا بنانے کے لئے دوبارہ ترتیب دیجئے، پھر نیچے دے گئے سوالوں کے جواب دیجئے
P. شری کرشنا نے اپنے تمام دوستوں کو جمہ کیا
Q. اپنی ستانی میں مست، انکو یے احساس نہیں ہوا کہ یشودہ کب گھر واپس ا گی.
R. ہر کوئی اپنی جان بچانے کے لئے باگ گے لیکن کرشنا کی اچھی پٹائی ہوئی.
S. ایک دن یشودہ کچھ کام کے لئے گھر سے نکلی.
T. اپنے دوستوں کی مدد سے، وو مکھن کے برتن تک پہنچ گیا اور انکو خانے میں مزا آیا.

دوبارہ ترییب دینے کے بعد کون سا جملہ چوتھا ہونا چاہیے؟

A.Q
A.Q
A.Q

B.S
B.S
B.S

C.P
C.P
C.P

D.T
D.T
D.T

Answer: A.Q
A.Q
A.Q

158 Out of the given four words only one is spelt correctly. Find the word that is correctly spelt.

A.Beginning

B.Beleive

C.Bizzare

D.Buisness

Answer: A.Beginning

159 Out of the given options, choose the one which is the correct active voice of the sentence given below.
The fields are being ploughed by the farmers.

A.The fields has been ploughed by the farmers.

B.The farmers has been ploughing the fields.

C.The farmers are ploughing the fields.

D.The farmers has ploughed the fields.

Answer: C.The farmers are ploughing the fields.

160 सूचना: दिलेल्या पर्यायांमधून वेगळे ते बाहेर काढा.

DIRECTIONS: Find the odd one out from the given alternatives.

سمت: دیے گئے متبادل میں سے بے جوڑ کو تلاش کرو۔

A.OQMS
A.OQMS
A.OQMS

B.UAWV
B.UAWV
B.UAWV

C.NPLR
C.NPLR
C.NPLR

D.BDZF
D.BDZF
D.BDZF

Answer: B.UAWV
B.UAWV
B.UAWV

161 एका भिंतीची लांबी आणि रूंदी अनुक्रमे 60 सेमी आणि 40 सेमी आहे. तर भिंतीच्या लांबी रूंदीचे गुणोत्तर शोधा.

Length and breadth of a wall are 60 cm and 40 cm respectively. Find the ratio of the length and breadth of the wall?

ایک دیوار کی لمبائی اور چوڑائی بالترتیب 60 سینٹی میٹر اور 40 سینٹی میٹر ہے۔ دیوار کی لمبائی اور چوڑائی کا تناسب معلوم کریں؟

A.13:12
A.13:12
A.13:12

B.4:3
B.4:3
B.4:3

C.3:2
C.3:2
C.3:2

D.3:1
D.3:1
D.3:1

Answer: C.3:2
C.3:2
C.3:2

162 सूचना: खालील माहिती काळजीपूर्वक वाचा आणि खालील प्रश्नांची उत्तरे द्या:
P, Q, R, S, T, U, V आणि W टेबलभोवती मध्यभागी तोंड करून बसले आहेत. T हा P च्या डावीकडून दुसरा आणि V च्या उजवीकडून तिसरा आहे, S हा W च्या उजवीकडून दुसरा आहे, जो T च्या तत्काळ उजवीला आहे. Q हा U च्या उजव्या बाजूला तिसरा आहे.
खालीलपैकी कोणत्या जोडीमध्ये पहिल्या आणि दुस-या व्यक्ती मध्ये तिसरा व्यक्ती बसलेला आहे?

DIRECTIONS: Study the following information carefully and answer the questions given below
P, Q, R, S, T, U, V and W are sitting around a circle facing at the centre. T is second to the left of P and third to the right of V, S is second to the right of W, who is to the immediate right of T. Q is third of the right of U.
In which of the following pairs is the third person sitting in between the first and the second persons?

ہدایات: مندرجہ ذیل معلومات کو دھیان سے پڑھیں اور نیچے دیے گئے سوالوں کے جواب دیں۔
P، Q، R، S، T، U، V اور W مرکز کی طرف رخ کیے ہوئے ایک دائرے کے ارد گرد بیٹھے ہیں۔ T، P کے بائیں طرف سے دوسرا ہے۔ V کے دائیں طرف سے تیسرا ہے اور S، W کے دائیں طرف سے دوسرا ہے، جو کہ T کے فوری دائیں طرف ہے۔ Q، U کے دائیں طرف سے تیسرا ہے۔
مندرجہ ذیل جوڑوں میں سے کس میں تیسرا شخص پہلے اور دوسرے شخص کے درمیان بیٹھا ہے؟

A.USP
A.USP
A.USP

B.VRU
B.VRU
B.VRU

C.TQW
C.TQW
C.TQW

D.यांपैकी कोणतीही नाही
D.None of these
D.ان میں سے کوئی نہیں

Answer: D.यांपैकी कोणतीही नाही
D.None of these
D.ان میں سے کوئی نہیں

163 सूचना: खाली दिलेल्या विधान (A) आणि कारण (R) साठी, खालील पैकी योग्य पर्याय निवडा:

विधान (A): अल्पकालीन हवामान बदलाचा अंदाज देण्यासाठी बॅरोमीटरचा वापर केला जातो.
कारण (R): बॅरोमीटरचे हवाई दाब मोजते.

DIRECTION: For the Assertion (A) and Reason (R) given below, choose the correct alternative from the following:

Assertion (A): Barometers are used to predict short term weather change.
Reason (R): Barometer measures air pressure.

ہدایت: نیچے دئیے گئے اسرشن (A) اور (R) کے لئے، مندرجہ ذیل میں سے صحیح متبادل منتخب کریں:

اسرشن (A): بیرومیٹرز کا استعمال مختصر عرصہ کے موسم کی تبدیلی کا اندازہ لگانے کے لئے کیا جاتا ہے۔
وجہ (R): بیرومیٹر ہوا کے دباؤ کا ماپتا ہے۔

A.दोन्ही (A) आणि (R) सत्य आहेत आणि (R) (A) च योग्य स्पष्टीकरण आहे.
A.Both (A) and (R) are true and (R) is the correct explanation of (A)
A. (A) اور (R) دونوں صحیح ہیں اور (R) (A) کی درست وضاحت ہے

B.दोन्ही (A)आणि (R) खरे आहेत, परंतु (R) (A) च योग्य स्पष्टीकरण नाही
B.Both (A) and (R) are true, but (R) is not the correct explanation of(A)
B. (A) اور (R) دونوں صحیح ہیں، لیکن (R) (A) کی درست وضاحت نہیں ہے

C.(A) सत्य आहे, परंतु (R) खोटे आहे
C.(A) is true, but (R) is false
C. (A) صحیح ہے، لیکن (R) غلط ہے

D.(A) खोटे आहे, परंतु (R) सत्य आहे
D.(A) is false, but (R) is true
D. (A) غلط ہے، لیکن (R) صحیح ہے

Answer: A.दोन्ही (A) आणि (R) सत्य आहेत आणि (R) (A) च योग्य स्पष्टीकरण आहे.
A.Both (A) and (R) are true and (R) is the correct explanation of (A)
A. (A) اور (R) دونوں صحیح ہیں اور (R) (A) کی درست وضاحت ہے

164 $x^2 = 14641, x > 0$ या वर्गसमीकरणाची मुळे आहेत:

The roots of the quadratic equation $x^2 = 14641, x > 0$ are:

مربع مساوات کے روٹ $x^2 = 14641, x>0$ ہیں:

A.121, -121
A.121, -121
A.121, -121

B.121, -121
B.-121, -121
B.-121, -121

C.-11, 11
C.-11, 11
C.-11, 11

D.11, 11
D.11, 11
D.11, 11

Answer: A.121, -121
A.121, -121
A.121, -121

165 G.P. 3, 6, 12, 24 चे 8वा पद …….हे आहे

The 8th term of the G.P. 3, 6, 12, 24 …….is:

3, 6, 12, 24 ……اس سرج کی آٹھوی ٹرم کیا ہے

A.384
A.384
A.384

B.192
B.192
B.192

C.488
C.488
C.488

D.288
D.288
D.288

Answer: A.384
A.384
A.384

166 रांगेत 17 मुली आहेत. मध्यभागी असलेल्या मुलीचा क्रमांक सुरुवातीपासून 9 वा आहे. तर शेवटून कोणत्या क्रमांकावरील मुलगी मध्यभागी असेल.

There are 17 girls in a row. The position of the girl at the middle is 9th from the beginning. What will be the position of the girl at the middle from the end?

کتار میں 17 لڑکیاں ہے.درمیان کی لڑکی کا مکام پہلے سے 9 وا ہے.اس لڑکی کہ مکام کیا ہوگا جو آخر سے درمیان میں ہوئی؟

A.(a) 7 व्या
A.7th
A.7th

B.(b) 9 व्या
B.9th
B.9th

C.(c) 8 व्या
C.8th
C.8th

D.(d) 10 व्या
D.10th
D.10th

Answer: B.(b) 9 व्या
B.9th
B.9th

167 खालीलपैकी कोणते शहर आहे?

Which of the following is a city?

درج ذیل میں سے کون ایک شہر ہے؟

A.माल्टा
A.Malta
A.مالٹا

B.सायप्रस
B.Cyprus
B.قبرص

C.ग्रॅनडा
C.Granada
C.غرناطہ

D.यांपैकी कोणतेही नाही
D.None of these
D.ان میں سے کوئی نہیں

Answer: C.ग्रॅनडा
C.Granada
C.غرناطہ

168 **सूचना**: खालील प्रश्नात उत्तरातील पर्यायांपैकी कोणत्या पर्यायी आकृतीत प्रश्नातील आकृती अंतर्भूत आहे?

DIRECTIONS: In the given question find the answer figure in which question figure is embedded.

ہدایات: دیئے گئے سوال میں جواب والی شکل دریافت کیجیئے جس میں سوال والی شکل سرایت کرگئی ہے۔

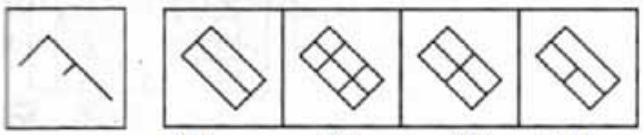

A. (A)

B. (B)

C. (C)

D. (D)

Answer: C. (C)

169

सूचना: खालील प्रश्नात दिलेल्या पर्यायांमधून नातेसंबंध असणारी आकृती शोधून काढा.

DIRECTIONS: In the question below, select the related figure from the given alternatives.

ہدایات: نیچے دیئے گئے سوال میں، دیئے گئے متبادلات میں سے متعلق متبادل چنئے۔

प्रश्न आकृत्या

Problem Figures

سوالی شکل

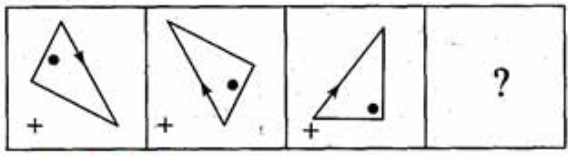

उत्तरासाठी पर्यायी आकृत्या

Answer Figure

جوابی شکل

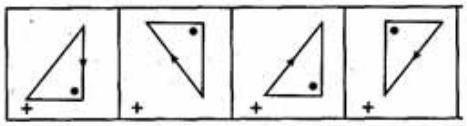

A. (A)

B. (B)

C. (C)

D. (D)

Answer: D. (D)

170 विशिष्ट संख्येने पुरूष एक काम 60 दिवसांत पूर्ण करतात. जर तेथे आणखी 8 पुरूष आले, तर त्या कामाला पूर्ण व्हायला 10 दिवस कमी लागतात. तेथे मुळत: किती पुरूष होते?

A certain number of men complete a piece of work in 60 days. If there were 8 men more, the work could be finished in 10 days less. How many men were originally there?

کچھ لوگوں نے ایک کام 60 دنوں میں مکمل کیا۔ اگر 8 آدمی اور ہوتے تو یہ کام 10 دن پہلے ختم کیا جا سکتا تھا۔ اصل میں وہاں کتنے آدمی تھے؟

A.30 पुरूष
A.30 men
A. 30آدمی

B.40 पुरूष
B.40 men
B. 40آدمی

C.45 पुरूष
C.45 men
C. 45آدمی

D.50 पुरूष
D.50 men
D. 50آدمی

Answer: B.40 पुरूष
B.40 men
B. 40آدمی

171 गहाळ संज्ञा शोधा?
Find the missing term?
گمنام نمبر کیا ہے ؟

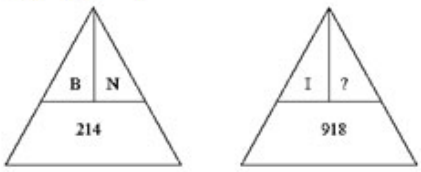

A. R

B. T

C. F

D. O

Answer: A. R

172 यापैकी कोणती आकृती कबूतर, पक्षी आणि कुत्रा यांच्या दरम्यानचे नाते सर्वोत्तम दर्शवते?

Which of the following diagrams indicates the best relation between Pigeon, Bird and Dog?

مندرجہ ذیل ڈایاگراموں میں سے کون سی کبوتر، پرندے اور کتے کے درمیان سب سے بہتر تعلق ہے؟

(A) 

(B) 

(C) 

(D) 

Answer: (A) 

173 एका घनाकृतीच्या तीन अवस्था दाखविल्या आहेत. त्यांवर अवलंबून हे शोधून काढा की दिलेल्या घनाकृतीमध्ये 5 या अंकाच्या विरुद्ध बाजूला कोणता अंक असेल?

Three positions of a cube are given. Based on them, find out, which number is found opposite number 5 in a given cube?

ہدایات: ایک کیوب کی تین حالتیں دی گئی ہیں۔ ان کی بنیاد پر، دریافت کیجیئے، کونسا نمبرکیوب میں دیئے گئے 5 نمبر کی اپوسٹ ہے ؟



A. 3

B. 5

C. 1

D. 6

Answer: C. 1

174 विभिन्न मानवी जातींमधील दिसून आलेला गेलेला भेदभाव हा—चा परिणामस्वरूप आहे

The discrimination witnessed among the various human species is the resultant of—

مختلف انسانی اقسام کے درمیان نظر آنے والا امتیازی سلوک --- کا نتیجہ ہے،

A.अनुवंशिकता
A.Heredity
A.وراثت

B.पर्यावरण
B.Environment
B.ماحولیات

C.वरील दोन्ही
C.Both the above
C.اوپر کے دونوں

D.वरीलपैकी कोणतेही नाही
D.None of the above
D.اوپر سے کوئی بھی نہیں

Answer: C.वरील दोन्ही
C.Both the above
C.اوپر کے دونوں

175 $\sqrt{441} = ?$

A. 0.21

B. 0.021

C. 2.1

D. 0.11

Answer: C. 2.1

176 हे सॉफ्टवेअर जे इंटरनेट सर्फ करण्याची परवानगी देते –

The software that allows users to surf the internet is -

وہ سافٹ ویئر جو صرافین کو انٹرنیٹ استعمال کرنے کی سہولت دیتا ہے-

A.सर्च इंजन
A.Search engine
A.سرچ انجن

B.इंटरनेट सेवाचा प्रदाता (आयएसपी)
B.Internet Service Provider (ISP)
B.انٹرنیٹ سروس پروائڈر (آئی ایس پی)

C.मल्टीमीडिया अनुप्रयोग
C.Multimedia application
C.ملٹی میڈیا ایپلی کیشن

D.ब्राउझर
D.Browser
D.براوزر

Answer: D.ब्राउझर
D.Browser
D.براوزر

177 पुढील जोडशब्द पूर्ण करा . ‘दाग ----------’

A.दुजी

B.मैल

C.दागिने

D.अच्छे है.

Answer: C.दागिने

178 **सूचना**: दिलेल्या पर्यायांमधून श्रेणी पूर्ण करणारी योग्य आकृती निवडा.

DIRECTIONS: Complete the series by choosing right figure from the given choices.

ہدایات: دیئے گئے اختیارات میں سے صحیح شکل کو چن کر سیریز کو مکمل کیجیئے

प्रश्न आकृत्या
Question Figures
سوالی شکل

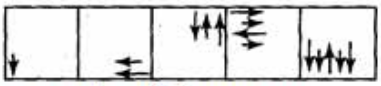

उत्तरासाठी पर्यायी आकृत्या
Answer Figures
جوابی شکل

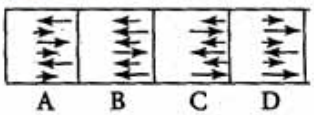

A. (A)

B. (B)

C. (C)

D. (D)

Answer: B. (B)

179 सूचनाः दिलेल्या पर्यायांमधून ऍनालॉगस शब्द निवडा.

कॅस्पियन सी यांचे इनलँड सीजसोबत नाते आहे जसे .....यांचे महासागरांसोबत आहे.

DIRECTIONS: Choose the analogous word from the given alternatives.

Caspian sea is to Inland seas as _____ is to Oceans.

ہدایات: دیے گئے متبادل سے مطابق لفظ کا انتخاب کریں

بحیرہ قزونین اگر انتردیشی سمندر کے لئے ہے تو -------- بحر (سمندر) کے لئے ہے

A.प्रशांत
A.Pacific
A. پیسفک

B.हिंद
B.Indian
B. انڈین

C.ऍटलांटिक
C.Atlantic
C. اٹلانٹک

D.आर्क्टिक
D.Arctic
D. آرکٹک

Answer: A.प्रशांत
A.Pacific
A. پیسفک

180 जर पुस्तकाला वही म्हटले, वहीला पेन म्हटले, पेनाला पेन्सिल म्हटले, पेन्सिलला बॅग म्हटले, बॅगेला वर्ग म्हटले आणि वर्गाला फळा म्हटले. तर मूल त्याची पुस्तके कशात ठेवेल?

If book is called notebook, notebook is called pen, pen is called pencil, pencil is called bag, bag is called class and class is called blackboard. Where a child put on his books?

اگر ایک کتاب کو کاپی، کاپی کو قلم، قلم کو پنسل، پنسل کو بیگ، بیگ کو درسگاہ اور درسگاہ کو تختہ سیاہ کہا جائے تو ایک بچہ اپنی کتاب کہاں رکھے گا؟

A.फळा
A.Blackboard
A.تختہ سیاہ

B.बॅग
B.Bag
B. بیگ

C.वर्ग
C.Class
C. درسگاہ

D.पुस्तक
D.Book
D. کتاب

Answer: C.वर्ग
C.Class
C. درسگاہ

181 संप्रेषण कौशल्य आहेत-

Communication skills are

مواصلات کی مہارتیں ہیں

A.बोलणे, सक्रिय ऐकणे आणि देहबोली
A.Speaking, Active listening & Body language
A.بولنے، فعال سننے اور جسمانی زبان

B.बोलणे, गाणे आणि देहबोली
B.Speaking, Singing & Body language
B.بولنگ، گانا اور جسمانی زبان

C.सक्रिय ऐकणे, लिखाण आणि झोपणे
C.Active listening, Writing and Sleeping
C.فعال سننے، تحریری اور نیند

D.बोलणे, ऐकत नाही आणि देहबोली
D.Speaking, Not listening & Body language
D.بول رہا ہے، سننا اور جسمانی زبان نہیں

Answer: A.बोलणे, सक्रिय ऐकणे आणि देहबोली
A.Speaking, Active listening & Body language
A.بولنے، فعال سننے اور جسمانی زبان

182 06:00 वाजता घड्याळामध्ये दिसणारी वेळ. तर घड्याळामधील बरोबर वेळ काय असेल?

Time appears in the mirror is 6:00. Then what is the correct time in clock?

آئینہ میں وقت 6:00 دکھ رہا ہے تو گھڑی میں اصلی وقت کیا ہوگا؟

A.5:58
A.5:58
A.5:58

B.6:60
B.6:60
B.6:60

C.6:00
C.6:00
C.6:00

D.6:01
D.6:01
D.6:01

Answer: C.6:00
C.6:00
C.6:00

183 1 ते 7 पर्यंतच्या विषम संख्यांची सरासरी काढा.

Find the average of odd numbers from 1 to7.

1سے 7 کے بیچ کے طاق نمبرس کا اوسط ہوگا۔

A.4
A.4
A.4

B.1
B.1
B.1

C.5
C.5
C.5

D.7
D.7
D.7

Answer: A.4
A.4
A.4

184 सरळ रूप द्या:
81122168 + 77777776 =?

Simplify:
81122168 + 77777776 =?

آسان بنائیں:
81122168 + 77777776 =?

A.158799944
A.158799944
A.158799944

B.158899844
B.158899844
B.158899844

C.158899944
C.158899944
C.158899944

D.158899744
D.158899744
D.158899744

Answer: C.158899944
C.158899944
C.158899944

185 मुख्य युक्तिवाद ज्यावर आधारित क्षमता-गट बनवण्याचा प्रश्न आजमावला गेला पाहीजे तो म्हणजे

The major argument on the basis of which the question of ability-grouping must be judged is that of—

بنیادی دلیل،جس پر گروہوں کی اہلیت کا فیصلہ کیا جاتا ہے، وہ ہے

A.शिकवणे आणि सूचना देणे यासाठी सुविधा देणे
A.Facilitating teaching and instruction
A.تدریس اور ہدایات کو فروغ دینا

B.अपयश कमी करणे
B.Reducing failure
B.ناکامی کو کم کرنا

C.विद्यार्थ्यांचे नैराश्य आणि कंटाळवाणेपणा कमीतकमी करणे
C.Minimizing pupil frustration and boredom
C.طالب علم کی مایوسی اور بوریت کو کم از کم کرنا

D.विद्यार्थ्याच्या वाढीसाठी सुविधा देणे
D.Facilitating pupil growth
D.طالب علم کی ترقی کو آسان بنانا

Answer: D.विद्यार्थ्याच्या वाढीसाठी सुविधा देणे
D.Facilitating pupil growth
D.طالب علم کی ترقی کو آسان بنانا

186

सूचना: खालील आकृतीचे प्रतिबिंब शोधून काढा.

DIRECTIONS: Find the mirror image of the figure given below.

ہدایات: نیچے دیئے گئے شکل کی آئینہ معکوس شکل کیا ہوگی۔

मुख्य आकृती
Main Figure
اصل شکل

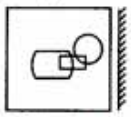

उत्तरासाठी पर्यायी आकृत्या
Answer Figure
جوابی شکل

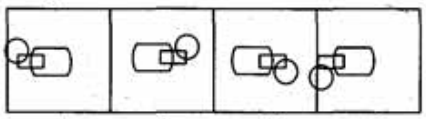

A. (A)

B. (B)

C. (C)

D. (D)

Answer: A. (A)

187 सूचना: खालील माहिती काळजीपूर्वक वाचा आणि खालील प्रश्नांची उत्तरे द्या:
P, Q, R, S, T, U, V आणि W टेबलभोवती मध्यभागी तोंड करून बसले आहेत. T हा P च्या डावीकडून दुसरा आणि V च्या उजवीकडून तिसरा आहे, S हा W च्या उजवीकडून दुसरा आहे, जो T च्या तत्काळ उजवीला आहे. Q हा U च्या उजव्या बाजूला तिसरा आहे.
P च्या उजवीकडून दुसरा कोण आहे?

DIRECTIONS: Study the following information carefully and answer the questions given below
P, Q, R, S, T, U, V and W are sitting around a circle facing at the centre. T is second to the left of P and third to the right of V, S is second to the right of W, who is to the immediate right of T. Q is third of the right of U.
Who is second to the right of P?

ہدایات: مندرجہ ذیل معلومات کو دھیان سے پڑھیں اور نیچے دیے گئے سوالوں کے جواب دیں۔
P، Q، R، S، T، U، V اور W مرکز کی طرف رخ کیے ہوئے ایک دائرے کے ارد گرد بیٹھے ہیں۔ T، P کے بائیں طرف سے دوسرا ہے اور V کے دائیں طرف سے تیسرا ہے، S، W کے دائیں طرف سے دوسرا ہے، جو کہ T کے دائیں طرف ہے۔ Q، U کے دائیں طرف سے تیسرا ہے۔
P کے دائیں طرف سے دوسرا کون ہے؟

A.S
A.S
A.S

B.V
B.V
B.V

C.U
C.U
C.U

D.Q
D.Q
D.Q

Answer: C.U
C.U
C.U

188 सूचना : खालील प्रत्येक प्रश्नात दोन विधाने I आणि II दिलेले आहेत. हे विधान एकतर स्वतंत्र कारण असू शकतात किंवा स्वतंत्र कारणांचे परिणाम असू शकतात. यांपैकी एक विधान इतर विधानाचा परिणाम असू शकतो. दोन्ही विधाने वाचा आणि खालीलपैकी कोणत्या उत्तराचा पर्याय या दोन्ही विधानांमधील संबंधांचे वर्णन करतो ते ठरवा.

विधान :
I. राज्य सरकार ABC ने संभाव्य गुन्ह्यांना रोखण्यासाठी आणि गुन्हेगारांना पकडण्यासाठी प्रकल्प "सतर्क नागरिक" सुरू करण्याचा प्रस्ताव ठेवला आहे.
II. गुन्हा नियंत्रित करण्यासाठी सार्वजनिक सहकार्य अत्यावश्यक आहे.

DIRECTIONS: Below in each question are given two statements I and II. These statements may be either independent causes or may be effects of independent causes. One of these statements may be the effect of the other statement. Read both the statements and decide which of the following answer choice correctly depicts the relationship between these two statements.

Statements:
I. The State government ABC has proposed to start a project “alert citizen” to curb possible crimes and nab the criminals.
II. Public cooperation is imperative in controlling crime.

ہدایات: نیچے ہر سوال میں دو بیانات I اور II آزاد وجوہات یا پھر آزاد وجوہات کے اثرات ہو سکتے ہیں۔ انہیں گئے ہیں۔ یہ بیانات یا تو آ بیانات میں سے ایک بیان دوسرے کا اثر ہو سکتا ہے۔دونوں بیانات پڑھیں اور فیصلہ کریں کہ نیچے دیے گئے کس جواب کا انتخاب ان دونوں بیانات کے در میان تعلق کو ٹھیک سے ظاہر کرتا ہے۔

بیانات:
I – ریاستی حکومت ABC نے ممکنہ جرائم روکنے اور مجرموں کو پکڑنے کے لیے "الرٹ سٹیزن" پراجیکٹ شروع کرنے کی تجویز پیش کی ہے۔
II - جرائم پر قابو پانے کے لیےعوام کا تعاون ضروری ہے۔

A.I हा परिणाम आहे आणि II हे त्याचे तात्काळ आणि प्रमुख कारण आहे;
A.I is effect and II is its immediate and principal cause;
A. بیان نمبر I اس کی فوری اور بنیادی وجہ ہے۔ II اثر ہے اور بیان نمبر

B.I हे तात्काळ आणि प्रमुख कारण आहे आणि II हा त्याचा परिणाम आहे;
B.I is the immediate and principal cause and II its effect;
B. بیان نمبر I فوری اور بنیادی وجہ ہے اور بیان نمبر II اس کا اثر ہے۔

C.I हा परिणाम आहे परंतु II हे त्याचे तात्काळ आणि प्रमुख कारण नाही;
C.I is an effect but II is not its immediate and principal cause;
C. بیان نمبر I اس کی فوری اور بنیادی وجہ نہیں ہے۔ II اثر ہے لیکن بیان نمبر

D.II हा परिणाम आहे परंतु I हे त्याचे तात्काळ आणि प्रमुख कारण नाही.
D.II is an effect but I is not its immediate and principal cause;
D.بیان نمبر II اس کی فوری اور بنیادی وجہ نہیں ہے۔ I اثر ہے لیکن بیان نمبر

Answer: A.I हा परिणाम आहे आणि II हे त्याचे तात्काळ आणि प्रमुख कारण आहे;
A.I is effect and II is its immediate and principal cause;
A. بیان نمبر I بیان نمبر اور II اثر ہے اور بنیادی وجہ ہے۔ اس کی فوری

189 ‘तोंडात बोट घालणे’ या वाक्प्रचाराचा अर्थ काय ?

A.नवल करणे.

B.नवस करणे.

C.नमस्कार करणे.

D.ओकारी करणे.

Answer: A.नवल करणे.

190 11 तास 34 मिनिटे 41 सेकंदांना सेकंदामध्ये रूपांतरीत करा.

Convert 11 hours 34 minutes 42 second into second?

11؟گھنٹے 34 منٹ 42 سیکنڈ کو سیکنڈ میں بدلیں

A.31682 सेकंद
A.31682 second
A.31682سیکنڈ

B.41682 सेकंद
B.41682 second
B.41682سیکنڈ

C.41582 सेकंद
C.41582 second
C.41582سیکنڈ

D.41282 सेकंद
D.41282 second
D.41282سیکنڈ

Answer: B.41682 सेकंद
B.41682 second
B.41682سیکنڈ

191 ‘वंद्य’ या शब्दाचा विरुद्धार्थी शब्द कोणता ?

A.मंद्य

B.वृंद

C.निंद्य

D.आद्य

Answer: C.निंद्य

192 निर्देश: खालीदिलेल्या अक्षराच्या क्रमात काही अक्षरे गहाळ केली आहेत ते त्या क्रमाने खाली दिलेल्या पर्यायांपैकी एक आहे

aa _ c _ a _ b _ c _ ab _ c

DIRECTIONS: In each of the following letter series, same of the letters are missing which are given in that order as one of the alternatives below it.

aa _ c _ a _ b _ c _ ab _ c

دایت جیل کے حرف سرج میں کوئی حرف گمشدہ ہے آپکو انکی شناخت جیل کے اختیارات سے کرنی ہے

aa _ c _ a _ b _ c _ ab _ c

A.aabbcc
A.aabbcc
A.aabbcc

B.acbcac
B.acbcac
B.acbcac

C.bcacac
C.bcacac
C.bcacac

D.acbcac
D.acbcac
D.acbcac

Answer: C.bcacac
C.bcacac
C.bcacac

193 एक शिक्षिका मजकूर तसेच फळे व भाज्यांची काही चित्रे वापरते आणि आपल्या विद्यार्थ्यांसह एक चर्चा करते. विद्यार्थी ते तपशील त्यांच्याकडे आधीच असलेल्या ज्ञानाशी जोडतात आणि ही संकल्पना शिकतात

A teacher uses a text and some picture of fruits and vegetable and holds and discussion with her students the students link the details with their previous knowledge and learn the concept of

ایک معلم متن اور پھل اور سبزیوں کی تصاویر کا استعمال کرتی ہے اور اپنے طلباء کے ساتھ مذاکرات کا اہتمام کرتی ہے تفصیلات کو اپنے ماقبل کے تجربہ سے مربوط کرتی ہے اورطلباء کا نظریہ جانتی ہے

A.अध्ययनाचे शास्त्रीय अनुकूलन
A.classical conditioning of learning
A.سیکھنے کا قدیم تشریطی طریقہ

B.परिपोष सिद्धांत
B.theory of reinforcement
B.کُمک کا نظریہ

C.व्यापारक अभिसंधान
C.operant conditioning
C.خود افزا ت شریط

D.ज्ञानाची रचना
D.construction of knowledge
D.معلومات کی تعمیر

Answer: D.ज्ञानाची रचना
D.construction of knowledge
D.معلومات کی تعمیر

194 जर P हा Q च्या मुलाच्या मुलाचा भाऊ आहे, तर P आणि Q यांचे नाते काय?

If P is the brother of the son of Q's son, how is P related to Q?

اگر Q P کے بیٹے کے بیٹے کا بھائی ہے، تو Q کا P سے کیا رشتہ ہے؟

A.भाऊ
A.Brother
A.بھائی

B.मुलगा
B.Son
B.بیٹا

C.पुतण्या
C.Cousin
C.چچا زاد

D.नातू
D.Grandson
D.پوتا

Answer:
D.नातू
D.Grandson
D.پوتا

195 खालीलपैकी कोणत्या पाण्यात रहाणाऱ्या प्राण्याला खवले नसतात?

Which of the following aquatic animals has no gills?

مندرجہ ذیل آبی جانوروں میں سے کسکا گلپھڑا نہیں ہے؟

A.मासे
A.Fish
A. مچھلی

B.बेडूक
B.Frog
B. مینڈک

C.व्हेल
C.Whale
C. وہیل

D.वरीलपैकी एकही नाही
D.None of the above
D.اوپر سے کوئی بھی نہیں

Answer:
C.व्हेल
C.Whale
C. وہیل

196 खालीलपैकी कोणते ग्राफिक सहायता मध्ये वर्गीकरण केले जात नाही?

Which one of the following is not classified under the Graphic aids?

مندرجہ ذیل میں سے کون سا گرافک ایڈز کی درجہ بندی کے تحت نہیں ہے؟

For More Info And Videos About TAIT-Exam Syllabus And Other Exam Visit My Channel
BADSHAHimp SubScribe Like & Share YouTube WWW.YouTube/BADSHAHimp

A.फोटोग्राफ
A.Photograph
A.فوٹو

B.ग्राफ (आलेख)
B.Graphs
B.گرافکس

C.बुलेटिन बोर्ड (सूचना फलक)
C.Bulletin boards
C.بلٹن بورڈز

D.नकाशे
D.Maps
D.نقشہ جات

Answer: C.बुलेटिन बोर्ड (सूचना फलक)
C.Bulletin boards
C.بلٹن بورڈز

197 शिक्षण पद्धतीचा अर्थ म्हणजे

The meaning of teaching method is —

تعلیم کے طریقہ کار کا مطلب ہے —

A.शिकवण्याची शैली
A.Style of teaching
A.تعلیم کا انداز

B.शिकवण्याचा प्रकार
B.Way of teaching
B.تعلیم کا طریقہ

C.शिकवण्याची कला
C.Art of teaching
C.تعلیم کا فن

D.बाह्य जगातील ज्ञानाचे मुलाच्या बुद्धीमत्तेमध्ये प्रतियोजन करणे
D.Substitution of the knowledge from outer world into child’s intellect
D.بیرونی دنیا سے بچے کی عقل میں علم کا تبادلہ

Answer: D.बाह्य जगातील ज्ञानाचे मुलाच्या बुद्धीमत्तेमध्ये प्रतियोजन करणे
D.Substitution of the knowledge from outer world into child’s intellect
D.بیرونی دنیا سے بچے کی عقل میں علم کا تبادلہ

For More Info And Videos About TAIT-Exam Syllabus And Other Exam Visit My Channel
BADSHAHimp SubScribe Like & Share WWW.YouTube/BADSHAHimp

198 रकतातील कोणता घटक गोलाकार आणि रंगरहीत आहे?

Which element in the blood is round and colourless?

خون میں کون سا عنصر گول اور بیرنگ ہے؟

A.प्लाजमा
A.Plasma
A. پلازما

B.प्लेटलेट
B.Platelets
B. پلیٹلیٹس

C.लाल रक्तपेशी
C.Red blood cells
C. سرخ خون کے خلیات

D.पांढऱ्या रक्त पेशी
D.White blood cells
D. سفید خون کے خلیات

Answer: D.पांढऱ्या रक्त पेशी
D.White blood cells
D. سفید خون کے خلیات

199 उपक्रमांचे स्वरूप — असायला हवे

The nature of projects should be —

- منصوبوں کی نوعیت ہونی چاہئے

A.सर्वात कठीण
A.Most difficult
A.سب سے مشکل

B.सर्वात सोपे
B.Most early
B.سب سے جلد

C.सर्वसामान्य पातळीचे
C.Average level
C.اوسط سطح

D.सांगू शकत नाही
D.Can’t say
D.نہیں کہہ سکتا

Answer: C.सर्वसामान्य पातळीचे
C.Average level
C.اوسط سطح

200 सूचना: अर्थपूर्ण परिच्छेद निर्माण करण्यासाठी, खाली दिलेली (P), (Q) (R), (S) आणि (T) ही पाच वाक्ये योग्य अनुक्रमाने पुनर्रचना करा; त्यांनतर खालील प्रश्नांची उत्तर द्या.
P. श्रीकृष्णाने आपले सर्व मित्र जमविले
Q. त्यांच्या बाल खोडीमध्ये ते एवढे तल्लीन होते, कि यशोदा घरी परत आल्याचे त्यांच्या लक्षातही आले नाही.
R. प्रत्येकजण जीव मुठीत धरून पळून गेले आणि कृष्णाची चांगलीच पिटाई झाली.
S. एके दिवशी यशोदा काही महत्वाच्या कामासाठी घराबाहेर पडली.

पुनर्रचना केल्यानंतर खालीलपैकी कोणते वाक्य पाचवे असेल?

DIRECTION: Rearrange the following five sentences (P), (Q), (R), (S) and (T) in the proper sequence to form a meaningful paragraph; then answer the questions given below them.
P. Shri Krishna gathered all his friends.
Q. Engrossed in their mischief, they did not realize when Yashoda had come back home.
R. Everybody else ran for their lives and Krishna got a good thrashing.
S. One day Yashoda left home for some important work.
T. With their help, he reached the pitcher of the butter and they all had a good time eating it.

Which of the following should be the FIFTH sentence after rearrangement?

ہدایات: ان پانچ جملوں (P)، (Q)، (R)، (S) اور (T) کو با معنی پیرا بنانے کے لئے دوبارہ ترتیب دیجئے، پھر نیچے دے گئے سوالوں کے جواب دیجئے
P. شری کرشنا نے اپنے تمام دوستوں کو جمہ کیا
Q. اپنی ستانی میں مست، انکو یے احساس نہیں ہوا کہ یشودہ کب گھر واپس ا گی.
R. ہر کوئی اپنی جان بچانے کے لئے باگ گے لیکن کرشنا کی اچھی پٹائی ہوئی.
S. ایک دن یشودہ کچھ کام کے لئے گھر سے نکلی.
T. اپنے دوستوں کی مدد سے، وو مکھن کے برتن تک پہنچ گیا اور انکو خانے میں مزا آیا.

دوبارہ ترییب دینے کے بعد کون سا جملہ پانچوہ ہونا چاہیے؟

A.R
A.R
A.R

B.Q
B.Q
B.Q

C.P
C.P
C.P

For More Info And Videos About TAIT-Exam Syllabus And Other Exam Visit My Channel
BADSHAHimp SubScribe Like & Share WWW.YouTube/BADSHAHimp

D.S
D.S
D.S

Answer: A.R
A.R
A.R

For More Info And Videos About TAIT-Exam Syllabus And Other Exam Visit My Channel
BADSHAHimp SubScribe Like & Share YouTube WWW.YouTube/BADSHAHimp

Question Paper Title : TAIT_PAPER_5

Date of Exam : 2017-12-14 16:00:00.0

1	Fill in the blank with the correct article. Twelve inches make _____foot.
	A.a
	B.an
	C.the
	D.No article required
Answer:	A.a

2	एन्झाइम्स म्हणजे: Enzymes are: انزائم ہیں:
	A.सूक्ष्मजीव A.Micro organisms A.مائکرو آرگنزم
	B.प्रोटीन B.Proteins B.پروٹین
	C.अकार्बनी संयुगे C.Inorganic compounds C.نامیاتی مرکب
	D.बंरशी D.Moulds D.قالب
Answer:	B.प्रोटीन B.Proteins B.پروٹین

For More Info And Videos About TAIT-Exam Syllabus And Other Exam Visit My Channel
BADSHAHimp Subscribe Like & Share YouTube WWW.YouTube.com/BADSHAHimp

3	Out of the four alternatives, choose the one which can be substituted for the given words/sentence. A person who knows and is able to use several languages
	A.Polyglot
	B.Agnostic
	C.Philistine
	D.Dumb
Answer:	A.Polyglot
4	Choose the word which is most similar in meaning to the given word. DANGEROUS
	A.Perilous
	B.Guarded
	C.Secured
	D.Sheltered
Answer:	A.Perilous
5	पुढील म्हण पूर्ण करा - 'अति शहाणा त्याचा ----------रिकामा.'
	A.बैल
	B.कागद
	C.गल्ला
	D.मेंदू
Answer:	A.बैल

For More Info And Videos About TAIT-Exam Syllabus And Other Exam Visit My Channel
BADSHAHimp SubScribe Like & Share YouTube WWW.YouTube.com/BADSHAHimp

6	मूल्यमापनाची महत्वपूर्ण साधने म्हणजे The important instruments of Evaluation are— تشخیص کے اہم آلات ہیں-
	A.शिकवण्याची कार्यपद्धती A.Teaching procedures A.تدریس کا طریقہ کار
	B.स्वयं-अहवाल देणारी तंत्रे B.Self-reporting techniques B.خود کی رپورٹنگ کی تکنیک
	C.निरिक्षणात्मक पद्धती C.Observational methods C.نظریاتی طریقے
	D.वरील सर्व D.All the above D.مذکورہ تمام
Answer:	D.वरील सर्व D.All the above D.مذکورہ تمام

For More Info And Videos About TAIT-Exam Syllabus And Other Exam Visit My Channel
BADSHAHimp SubScribe Like & Share YouTube WWW.YouTube.com/BADSHAHimp

7 सूचना: अर्थपूर्ण परिच्छेद निर्माण करण्यासाठी, खाली दिलेली (P), (Q) (R), (S) आणि (T) ही पाच वाक्ये योग्य अनुक्रमाने पुनर्रचना करा; त्यांनतर खालील प्रश्नांची उत्तर द्या.
P. एक दिवस मगर नदीच्या बाहेर आली.
Q. फार पूर्वी, एका नदीच्या काठावरील गुलाबी-सफरचंदाच्या झाडावर एक माकड राहत होते.
R. दयाळू माकडाने त्याला काही गुलाबी-सफरचंद दिली.
S. तो पोहून झाडाजवळ गेला आणि त्याला खूप भूक लागल्याचे त्याने माकडाला सांगितले.
T. मगरने त्याला धन्यवाद दिले आणि तो पुन्हा भेटू शकेल काय अशी विचारणा केली.

पुनर्रचना केल्यानंतर खालीलपैकी कोणते वाक्य पहिले असेल?

DIRECTION: Rearrange the following five sentences (P), (Q), (R), (S) and (T) in the proper sequence to form a meaningful paragraph; then answer the questions given below them.
P. One day, a crocodile came out of the river.
Q. A long time ago, there was a monkey who lived in a rose-apple tree by the side of a river.
R. The kind monkey offered him a few rose-apples.
S. He swam up to the tree and told the monkey that he was very hungry.
T. The crocodile thanked him and asked him if he could visit him again.

Which of the following should be the FIRST sentence after rearrangement?

ہدایات: ان پانچ جملوں (P)، (Q)، (R)، (S) اور (T) کو با معنی پیرا بنانے کے لئے دوبارہ ترتیب دیجئے، پھر نیچے دے گئے سوالوں کے جواب دیجئے

P. ایک دن، مگرمچھ دریا سے باہر آی
Q. بہت وقت پہلے، ایک بندر تھا جو دریا کے کنارے ایک لال سیب کے پیڑ پر رہتا تھا.
R. رحیم بندر نے اسے کچھ لال سیب دے.
S. وو پیڑ تک تیرا اور بندر سے کہا کہ وو بہت بوکھا ہے
T. مگرمچھ نے اسکا شکریہ کیا اور کہا کہ کیا وو دوبارہ آسکھتا ہے

دوبارہ ترییب دینے کے بعد کون سا جملہ پہلے ہونا چاہیے؟

A.Q
A.Q
A.Q

B.R
B.R
B.R

C.S
C.S
C.S

D.T
D.T
D.T

For More Info And Videos About TAIT-Exam Syllabus And Other Exam Visit My Channel
BADSHAHimp SubScribe Like & Share WWW.YouTube.com/BADSHAHimp

Answer: A.Q
A.Q
A.Q

8 दि ग्रेट बाथ हे _____यांचे स्मारक आहे –

The Great Bath is a monument of the –

دی گریڈ باتھ _____ کی یادگار میں ہے

A.मौर्य
A.Mauryas
A.موریا

B.सिंधु संस्कृती
B.Indus Valley Civilization
B.سندھ وادی کی تہذیب

C.राष्ट्रकूट
C.Rashtrakutas
C.راشٹرکوتا

D.चंडेल
D.Chandelas
D.چنڈیلا

Answer: B.सिंधु संस्कृती
B.Indus Valley Civilization
B.سندھ وادی کی تہذیب

9 तीन प्रकारचे ताण आहेत:

The three types of stress are:

تین قسم کے دباؤ ہیں:

A.भौतिक/ पर्यावरणीय, मानसिक आणि सामाजिक
A.Physical / Environmental, Psychological & Social
A.جسمانی ، ماحولیاتی، نفسیاتی اور سماجی

B.भौतिक, वैयक्तिक आणि सामाजिक
B.Physical, Personal & Social
B.جسمانی، ذاتی اور سماجی

	C.मसपयिक, भौतिक आणि सामाजिक C.Physiological, Physical & Social C.نفسیاتی، جسمانی اور سماجی
	D.प्राथमिक, द्वितीय आणि त्रितीय D.Primary, Secondary & Tertiary D.بنیادی، ثانوی اور تیسرے درجے کی
Answer:	A.भौतिक/ पर्यावरणीय, मानसिक आणि सामाजिक A.Physical / Environmental, Psychological & Social A.جسمانی ، ماحولیاتی، نفسیاتی اور سماجی
10	$\left(\frac{9\times9\times9-5\times5\times5}{9\times9+9\times5+5\times5}\right)=?$
	A. 20
	B. 4
	C. 8
	D. 15
Answer:	B. 4

11 सूचना: खालील माहितीचा काळजीपूर्वक अभ्यास करा आणि दिलेल्या प्रश्नांची उत्तरे द्या.
आठ मित्र - A, B, C, D, E, F, G आणि H — हे अशा चौरसकार टेबलाभोवती बसले आहेत की त्यापैकी चार जण टेबलच्या चार कोप-यांवर बसले आहेत तर इतर चार त्या चार बाजूंच्या मध्यभागी बसले आहेत. ते जे चार बाजूंच्या मध्यभागी बसून आहेत ते मध्याभागाकडे बघत आहेत तर जे लोक चार कोपऱ्यांवर बसले आहेत ते बाहेर बघत आहेत.
A हा C च्या डाव्या बाजूला तिसरा आहे, जो कोणत्याही कोपऱ्यांवर नाही बसला आहे. E हा F च्या डाव्या बाजूला तिसरा आहे, जो C चा तत्काळ शेजारी नाही. B आणि H हे एकमेकांचे तत्काळ शेजारी हि नाहीत किंवा क्रमशः A आणि D चे हि तत्काळ शेजारी नाहीत. D कुठल्याही बाजूच्या मध्यभागी बसलेला नाही आणि कमीतकमी दोन व्यक्ती A आणि D च्या मध्ये बसलेले पाहिजेत. E आणि G एकमेकांसमोर बसलेले आहेत परंतु एकमेकांना तोंड देत नाहीत. F हा C च्या विरुद्ध बसू शकत नाही.
खालीलपैकी कोण D आणि G च्या बरोबर मध्ये बसतो?

DIRECTIONS: Study the following information carefully and answer the given questions.
Eight friends – A, B, C, D, E, F, G and H— are sitting around a square table in such a way that four of them sit at four corners of the table while the other four sit in the middle of the four sides. Those who sit in the middle of the four sides face the centre while those who sit at the four corners face outside.
A sits third to the left of C, who does not sit at any of the corners. E sits third to the left of F, who is not an immediate neighbour of C. B and H are neither immediate neighbours of each other nor of A and D respectively. D does not sit in the middle of any sides and at least two person should sit between A and D. E and G sit opposite to each other but do not face each other. F cannot sit opposite C.
Who among the following sits exactly between D and G?

ہدایات: مندرجہ ذیل معلومات کو دھیان سے پڑھیں اور دیے گئے سوالوں کے جواب دیں۔
ایک مربع میز کے ارد گرد بیٹھے ہوئے ہیں اس طرح سے کہ ان میں سے چار میز کے – H اور G، F، E، D، C، B، A - آٹھ دوست چاروں کونوں پر بیٹھا ہے جبکہ باقی چار چاروں کناروں کے درمیان میں بیٹھے ہیں۔ جو لوگ چاروں کونوں کے درمیان میں بیٹھے ہیں ان کا رخ مرکز کی طرف جبکہ چاروں کناروں پر بیٹھے لوگوں کا رخ باہر کی طرف ہے۔
A، C کا C کے بائیں سے تیسرے پر بیٹھا ہے، جو E، F کے بائیں طرف سے تیسرے پر بیٹھا ہے، جو کسی بھی کونے پر نہیں بیٹھا ہے۔ کسی بھی کناروں کے درمیان میں D کے پڑوسی ہیں۔ D اور A نہ تو بالترتیب ایک دوسرے کے اور نہ ہی Hاور B فوری پڑوسی نہیں ہے۔ ایک دوسرے کے مخالف بیٹھے ہوئے ہیں لیکن G اور E کے درمیان کم سے کم دو لوگ بیٹھے ہونے چاہیے۔ D اور A نہیں بیٹھا ہے اور کے مخالف نہیں بیٹھ سکتا ہے۔ F، C ایک دوسرے کا سامنا نہیں کر رہے ہیں۔
کے ٹھیک درمیان میں بیٹھا ہے؟ G اور D مندرجہ ذیل میں سے کون

A.E
A.E
A.E

B.H
B.H
B.H

C.F
C.F
C.F

D.C
D.C
D.C

Answer: D.C
D.C
D.C

12 सूचना: खालील प्रश्नांमध्ये दिलेल्या पर्यायांमधून संबंधित अक्षर/शब्द/संख्या निवडा.

हवा पक्षी : : समुद्र : ?

DIRECTIONS: In the following question, select the related letter/word/number from the given alternatives.

Air: Bird : : Sea : ?

سمت: مندرجہ ذیل سوال میں، دیے گئے متبادل سے متعلقہ حرف/لفظ/نمبر منتخب کریں۔

ہوا: چڑیا : : سمندر : ؟

A.निसटणे
A.Slip
A.پھسلنا

B.मासा
B.Fish
B.مچھلی

C.बॉक्स
C.Box
C.ڈبہ

D.मीठ
D.Salt
D.نمک

Answer: B.मासा
B.Fish
B.مچھلی

13 साप त्यांच्या .....ने अन्न खातात -

Snakes eat their food by -

سانپ اپنی خوراک کو کھاتے ہیں -

A.त्याचे देह फाडून
A.Tearing its flesh
A. اس کے گوشت کو پھاڑکر

B.कुड च्यूइंग नावाची प्रक्रिया
B.A process called cud chewing
B. کڈچونگ نامی ایک عمل

C.एक संपूर्ण पणे गिळून
C.Swallowing it as a whole
C. مجموعی طور پر نگل جانا

D.त्याचे रक्त शोषून घेऊन
D.Sucking its blood
D. اس کے خون چوس کر

Answer:
C.एक संपूर्ण पणे गिळून
C.Swallowing it as a whole
C. مجموعی طور پر نگل جانا

14 ज्या वनस्पती एक वर्षासाठी किंवा एका हंगामासाठी जगतात त्यांना म्हणतात _____

The plants that live for a year or one season are called as _____

ایک سال یا ایک موسم کے لئے زندہ رہنے والے پودوں کو کہا جاتا ہے

A.द्विवार्षिक वनस्पती
A.Biennial plants
A. دوسالہ پودے

B.वार्षिक वनस्पती
B.Annual Plants
B. سالانہ پودے

C.बारमाही वनस्पती
C.Perennial Plants
C. بارہماسی پودا

D.झुडपे
D.Shrubs
D. جھاڑیاں

Answer:
B.वार्षिक वनस्पती
B.Annual Plants
B. سالانہ پودے

15 सूचना: प्रत्येक प्रश्नाला एक प्रमुख विधानासोबत चार विधाने आहेत ज्यांच्याखाली A, B, C, आणि D असे चार विधान आहेत. क्रमवार विधानांची जोडी निवडा ज्यामध्ये प्रथम विधान दुसऱ्या विधानाला सुचवते, आणि दोन्ही विधाने तर्किकदृष्ट्या प्रमुख विधानासोबत निगडित असेल.

जेव्हा ती घरी येते, तेव्हा ती गोड आणते
A. ती घरी आली
B. ती घरी आली नाही
C. तिने गोड आणले
D. तिने गोड आणले नाही

DIRECTIONS: Each question has a main statement followed by four statements labelled A, B, C and D. Choose the ordered pair of statements, where the first statement implies the second, and the two statements are logically consistent with the main statement.

When she comes home, she brings sweets.
A. she came home
B. she did not come home
C. she brought sweets
D. she did not bring sweets

ہدایت: ہر سوال میں ایک جملہ ہے جسکے بعد چار جملےاے، بی،سی اور ڈی کے نام سے دئے گئے ہیں اسمیں منسلک جوڑیوں کو چنئے۔ جہاں پہلا جملہ دوسرے جملہ کی اور اشارہ کر رہا ہے اور دو جملے منطقی مرکزی بیان کے مطابق ہیں

جب وہ گھر آتی ہے تو مٹھائی لاتی ہے
Aوہ گھر آئی ۔
Bوہ گھر نہیں آئی ۔
Cوہ مٹھائی لائی ۔
Dوہ مٹھائی نہیں لائی ۔

A.AC
A.AC
A.AC

B.BA
B.BA
B.BA

C.DA
C.DA
C.DA

D.CD
D.CD
D.CD

Answer: A.AC
A.AC
A.AC

16

सूचना: दिलेल्या चारांपैकी वेगळी (असंबद्ध) असणारी आकृती शोधून काढा.

DIRECTIONS: Select the odd from the given four figures.

ہدایات: دی گئی چار شکلوں میں سے طاق چنیے۔

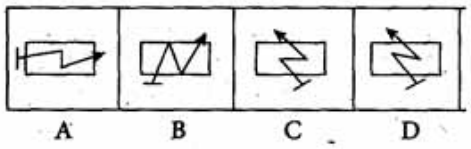

A. (A)

B. (B)

C. (C)

D. (D)

Answer: A. (A)

17 निर्देश: खालील अक्षर-संख्याच्या व्यवस्थेचे निरीक्षण करा आणि खालील प्रश्नांची उत्तरे द्या:

B 8 4 C R M 9 P D K W F A 2 E J 7 X U Q H L T Y 6 G S

दिलेल्या पर्यायांपैकी कोणते संख्या\ अक्षर वर दिलेल्या व्यवस्थेच्या उजवी कडून 12 व्या संख्या\ अक्षर च्या डाव्या बाजूने 10 वे आहे?

DIRECTION: Study the following letter-number arrangement and answer the questions given below:

B 8 4 C R M 9 P D K W F A 2 E J 7 X U Q H L T Y 6 G S

Which of the following is the tenth to the left of the twelfth from the right end of the above arrangement?

ہدایت جیل می دی گی حرف اور نمبرس کی ترتیب پڑھئے اور سوالونکے جوا ب دو

B 8 4 C R M 9 P D K W F A 2 E J 7 X U Q H L T Y 6 G S

سیدھے ہاتھ سے بارہوے حرف کے الٹے ہاتھ سے دسوا حرف کونسا ہے ؟

A.W
A.W
A.W

B.U
B.U
B.U

C.7
C.7
C.7

D.M
D.M
D.M

Answer: D.M
D.M
D.M

18 सर्वात सामान्य मानसिक विकार आहे

The most commonest psychiatric disorder is

سب سے عام نفسیاتی بیماری ہے

A.स्मृतिभ्रंश
A.Dementia
A.عتاہٹ (ذہنی جبلتوں کا انحطاط)

B.छिन्नमनस्कता (स्किझोफ्रेनिया)
B.Schizophrenia
B. شَقاق دِماغی

C.विभ्रम
C.Paranoia
C.خلل دماغی

D.नैराश्य
D.Depressio
D.اداسی

Answer: A.स्मृतिभ्रंश
A.Dementia
A.عتاہٹ (ذہنی جبلتوں کا انحطاط)

19 6 वर्षांपूर्वी कमल आणि सुरेशच्या वयाचे गुणोत्तर 6:5 होते. जर 4 वर्षांनंतर त्यांच्या वयाचे गुणोत्तर 11:10 होईल, तर सुरेशचे सध्याचे वय किती आहे (वर्षांमध्ये)?

6 years back the ratio of Kamal's and Suresh's age was 6 : 5. If 4 years later the ratio of their ages is 11 : 10, then what is the age of Suresh (in years) at present?

6 سال پہلے کمال اور سریش کی عمروں کا تناسب 5:6 تھا۔اگر 4 سال بعد یہ تناسب 10:11 ہو، تو سریش کی موجودہ عمر (سالوں میں)کیا ہو گی؟

A.16
A.16
A.16

B.10
B.10
B.10

C.18
C.18
C.18

D.12
D.12
D.12

Answer: A.16
A.16
A.16

20 Choose the word which is opposite in meaning to the given word.
AUTONOMOUS

A.Dependent

B.Self-governing

C.Independent

D.Sovereign

Answer: A.Dependent

21 अन्य व्यक्ती / व्यक्तींना हानी पोचविण्यासाठी उद्देश असलेल्या एका व्यक्तीकडून / व्यक्तींकडून कोणतीही वागणूक म्हणजे-

Any behavior by one person/persons that is intended to cause harm to another person/persons is known as

ایک شخص / افراد کے ذریعہ کسی بھی رویے کو کسی شخص یا شخص کو نقصان پہنچانے کا ارادہ کرنا ہے

A.आक्रमकता
A.Aggression
A.جارحانہ

B.हिंसा
B.Violence
B.تشدد

C.भीती
C.Phobia
C.فابیا

D.निराशा
D.Frustration
D.مایوسی

Answer: A.आक्रमकता
A.Aggression
A.جارحانہ

22 जर तुम्ही तुमच्या सहकाऱ्याला तुमच्या विवाह समारंभामध्ये आमंत्रण दिले, तर त्याची पद्धत — असेल

If you invite your colleagues in your marriage ceremony, the procedure of it will be—

—.اگر آپ اپنی شادی کی تقریب میں اپنے ساتھیوں کو دعوت دیتے ہیں تو اس کا طریقہ کار ہو گا

A.सर्वात जवळच्या सहकाऱ्याला फक्त वैयक्तिक आमंत्रण दिले जाईल
A.Only personal invitation will be extended to most dear colleague
A.سب سے زیادہ عزیز ساتھی کو صرف ذاتی دعوت نامہ دیا جائے گا

B.फक्त शिक्षकांच्या एका विशिष्ट गटाला आमंत्रण दिले जाईल
B.Only a specific group of teachers will be invited
B.صرف اساتذہ کا مخصوص گروپ مدعو کیا جائے گا

C.कोणतेही अंतर न ठेवता सर्व शिक्षकांना आमंत्रण दिले जाईल
C.Extend invitation to all the teachers without any distinction
C.تمام اساتذہ کو کسی بھی فرق کے بغیر دعوت نامہ دینا

D.तुमच्यापेक्षा खालच्या श्रेणीवर असलेल्या लोकांना तुम्ही आमंत्रण देणार नाही
D.You will not invite people lower ranked than you
D.آپ اپنے مقابلے میں کم تر لوگوں کو مدعو نہیں کریں گے

Answer: C.कोणतेही अंतर न ठेवता सर्व शिक्षकांना आमंत्रण दिले जाईल
C.Extend invitation to all the teachers without any distinction
C.تمام اساتذہ کو کسی بھی فرق کے بغیر دعوت نامہ دینا

23 सूचना: अर्थपूर्ण परिच्छेद निर्माण करण्यासाठी, खाली दिलेली (P), (Q) (R), (S) आणि (T) ही पाच वाक्ये योग्य अनुक्रमाने पुनर्रचना करा; त्यांनतर खालील प्रश्नांची उत्तर द्या.
P. एक दिवस मगर नदीच्या बाहेर आली.
Q. फार पूर्वी, एका नदीच्या काठावरील गुलाबी-सफरचंदाच्या झाडावर एक माकड राहत होते.
R. दयाळू माकडाने त्याला काही गुलाबी-सफरचंद दिली.
S. तो पोहून झाडाजवळ गेला आणि त्याला खूप भूक लागल्याचे त्याने माकडाला सांगितले.
T. मगरने त्याला धन्यवाद दिले आणि तो पुन्हा भेटू शकेल काय अशी विचारणा केली.

पुनर्रचना केल्यानंतर खालीलपैकी कोणते वाक्य चौथे असेल?

DIRECTION: Rearrange the following five sentences (P), (Q), (R), (S) and (T) in the proper sequence to form a meaningful paragraph; then answer the questions given below them.
P. One day, a crocodile came out of the river.
Q. A long time ago, there was a monkey who lived in a rose-apple tree by the side of a river.
R. The kind monkey offered him a few rose-apples.
S. He swam up to the tree and told the monkey that he was very hungry.
T. The crocodile thanked him and asked him if he could visit him again.

Which of the following should be the FOURTH sentence after rearrangement?

ہدایات: ان پانچ جملوں (P)، (Q)، (R)، (S) اور (T) کو با معنی پیرا بنانے کے لئے دوبارہ ترتیب دیجئے، پھر نیچے دے گئے سوالوں کے جواب دیجئے

P. ایک دن، مگرمچھ دریا سے باہر آی
Q. بہت وقت پہلے، ایک بندر تھا جو دریا کے کنارے ایک لال سیب کے پیڑ پر رہتا تھا.
R. رحیم بندر نے اسے کچھ لال سیب دے.
S. وو پیڑ تک تیرا اور بندر سے کہا کہ وو بہت بوکھا ہے
T. مگرمچھ نے اسکا شکریہ کیا اور کہا کہ کیا وو دوبارہ آسکھتا ہے

دوبارہ ترییب دینے کے بعد کون سا جملہ چوتھا ہونا چاہیے؟

A.R
A.R
A.R

B.P
B.P
B.P

C.Q
C.Q
C.Q

D.T
D.T
D.T

Answer: A.R
A.R
A.R

24 गांधीजींच्या अस्थी कुठे ठेवल्या आहेत –

Gandhiji's ashes are kept in –

گاندھی جی کی راکھ کو _____ میں رکھا گیا ہے

A.पुणे
A.Pune
A.پونے

B.मुंबई
B.Mumbai
B.ممبئی

C.दिल्ली
C.Delhi
C.دہلی

D.यांपैकी कोणतेही नाही
D.None of these
D.ان میں سے کوئی نہیں

Answer: D.यांपैकी कोणतेही नाही
D.None of these
D.ان میں سے کوئی نہیں

25 खालीलपैकी शुद्ध शब्द कोणता ?

A.वृश्चीक

B.व्रुश्चिक

C.वृश्चिक

D.वृच्छिक

Answer: C.वृश्चिक

26	DIRECTIONS: A sentence with an underlined phrasal verb is given below. Out of the four options, choose the one which can be substituted for the given phrasal Verb. Let's get down to business
	A.give no attention to
	B.give serious attention to
	C.eliminate
	D.leave away
Answer:	B.give serious attention to

27	वेक्स्लरची प्रौढ बुद्धिमत्ता मोजपट्टी आहे- Wechsler's Adult intelligence scale is بالغ انٹیلی جنس پیمانے ہے ویچسلر
	A.तोंडी, लेखी आणि कार्यप्रदर्शन चाचणी A.Verbal, non–verbal & performance test A.زبانی، غیر زبانی اور کارکردگی کا ٹیسٹ
	B.तोंडी आणि लेखी चाचणी B.Verbal & non–verbal test B. زبانی اور غیر زبانی امتحان
	C.लेखी बुद्धि चाचणी C.Non–verbal test C.غیر زبانی امتحان
	D.तोंडी आणि कार्यक्षमता चाचणी D.Verbal and performance test D.زبانی اور کارکردگی کی جانچ
Answer:	A.तोंडी, लेखी आणि कार्यप्रदर्शन चाचणी A.Verbal, non–verbal & performance test A.زبانی، غیر زبانی اور کارکردگی کا ٹیسٹ

28	' पुण्य ' या शब्दाचा विरुद्धार्थी शब्द कोणता ?

	A.पतित
	B.पावन
	C.पवित्र
	D.पाप
Answer:	D.पाप

29	$\sqrt[3]{1369} = ?$
	A. 26
	B. 37
	C. 69
	D. 36
Answer:	B. 37

30	खालीलपैकी काय जैवअपघटनीय आहे ? Which of the following is biodegradable? مندرجہ ذیل میں سے کونبایو ڈی گریڈایبل ہے؟
	A.कागद A.Paper A. کاغذ
	B.डी.डी.टी. B.D.D.T. B. ڈی ڈی ٹی
	C.एल्युमिनियम C.Aluminum C. ایلیومینیم
	D.प्लॅस्टिक D.Plastic D. پلاسٹک

Answer: A.कागद
A.Paper
A. کاغذ

31 या वर्षापासून 5 सप्टेंबर हा दिवस राष्ट्रीय शिक्षक दिन म्हणून साजरा करण्यात येतो

5th September is being celebrated as nation teachers day since the year

5 ستمبر کو قومی یوم اساتذہ کے طور پر کس سال سے منایا جارہا ہے

A.1952
A.1952
A.1952

B.1982
B.1982
B.1982

C.1962
C.1962
C.1962

D.2002
D.2002
D.2002

Answer: C.1962
C.1962
C.1962

32 **सूचना:** खालील प्रश्नात असे 3 घटक आहेत ज्यांचा परस्परांशी विशिष्ट संबंध आहे. समान संबंध वर्तुळाच्या संचांनी दर्शविलेला आहे, प्रत्येक वर्तुळ त्याचा आकार कितीही असला तरी, एका घटकाचे प्रतिनिधित्व करते. योग्य वर्तुळाच्या संचांशी खालील घटकांच्या जोड्या लावा.

DIRECTION: The question below has three items having certain relationship among them. The same relationship is expressed by sets of circles, each circle representing one item irrespective of its size. Match the items with right set of circles.

ہدایت: مندرجہ ذیل سوال میں تین آئٹم ہیں جن کے مابین مختلف تعلقات ہیں۔ دائروں کے ایک سیٹ کے ذریعہ یکساں تعلق ظاہر کیا جاتا ہے، ہر دائرہ سائز سے قطع نظر ایک آئٹم کی نمائندگی کرتا ہے۔ آئٹم کو دائروں کے درست سیٹ کے ساتھ ملائیں

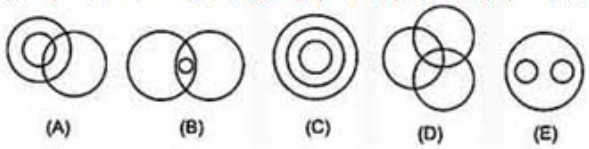

विद्यार्थी, प्रथम श्रेणीप्राप्त विद्यार्थी, तृतीय श्रेणीप्राप्त विद्यार्थी

Students, First divisioners, Third divisioners

طالب علم، اول درجہ والے، سوم درجہ والے۔

	A. (B)
	B. (C)
	C. (D)
	D. (E)
Answer:	D. (E)

33	शिकणे हे व्यक्तीमधील काहीतरी ध्वनित करते Learning implies something in the individual سیکھنا انفرادی طور پر کچھ ہے
	A.द्वारे प्राप्त केले गेलेले A.Acquired by A.حاصل کیا گیا
	B.सह घडत असलेले B.Occurring to B.واقع ہو رہا ہے
	C.मध्ये घडत असलेले C.Occurring within C.کے اندر واقع
	D.द्वारे अवगत केले गेलेले D.Absorbed by D.کی جانب سے مشاہدہ کیاگیا
Answer:	C.मध्ये घडत असलेले C.Occurring within C.کے اندر واقع

34

सूचना: दिलेल्या पर्यायांमधून श्रेणी पूर्ण करणारी योग्य आकृती निवडा.

DIRECTIONS: Complete the series by choosing right figure from the given choices.

ہدایات: دیئے گئے اختیارات میں صحیح شکل کا انتخاب کر کے سیریز کو مکمل کیجیئے۔

Problem Figures

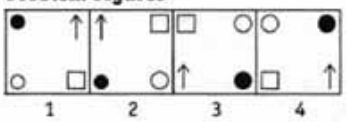

Answer Figures

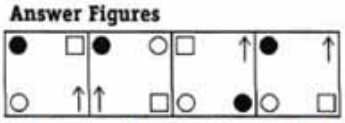

A. (A)

B. (B)

C. (C)

D. (D)

Answer: D. (D)

35 सूचना: अर्थपूर्ण परिच्छेद निर्माण करण्यासाठी, खाली दिलेली (P), (Q) (R), (S) आणि (T) ही पाच वाक्ये योग्य अनुक्रमाने पुनर्रचना करा; त्यांनतर खालील प्रश्नांची उत्तर द्या.
P. एक दिवस मगर नदीच्या बाहेर आली.
Q. फार पूर्वी, एका नदीच्या काठावरील गुलाबी-सफरचंदाच्या झाडावर एक माकड राहत होते.
R. दयाळू माकडाने त्याला काही गुलाबी-सफरचंद दिली.
S. तो पोहून झाडाजवळ गेला आणि त्याला खूप भूक लागल्याचे त्याने माकडाला सांगितले.
T. मगरने त्याला धन्यवाद दिले आणि तो पुन्हा भेटू शकेल काय अशी विचारणा केली.

पुनर्रचना केल्यानंतर खालीलपैकी कोणते वाक्य दुसरे असेल?

DIRECTION: Rearrange the following five sentences (P), (Q), (R), (S) and (T) in the proper sequence to form a meaningful paragraph; then answer the questions given below them.
P. One day, a crocodile came out of the river.
Q. A long time ago, there was a monkey who lived in a rose-apple tree by the side of a river.
R. The kind monkey offered him a few rose-apples.
S. He swam up to the tree and told the monkey that he was very hungry.
T. The crocodile thanked him and asked him if he could visit him again.

Which of the following should be the SECOND sentence after rearrangement?

ہدایات: ان پانچ جملوں (P)، (Q)، (R)، (S) اور (T) کو با معنی پیرا بنانے کے لئے دوبارہ ترتیب دیجئے، پھر نیچے دے گئے سوالوں کے جواب دیجئے

P. ایک دن، مگرمچھ دریا سے باہر آی
Q. بہت وقت پہلے، ایک بندر تھا جو دریا کے کنارے ایک لال سیب کے پیڑ پر رہتا تھا.
R. رحیم بندر نے اسے کچھ لال سیب دے.
S. وو پیڑ تک تیرا اور بندر سے کہا کہ وو بہت بوکھا ہے
T. مگرمچھ نے اسکا شکریہ کیا اور کہا کہ کیا وو دوبارہ آسکھتا ہے

دوبارہ ترییب دینے کے بعد کون سا جملہ دوسرا ہونا چاہیے؟

A.P
A.P
A.P

B.Q
B.Q
B.Q

C.R
C.R
C.R

D.T
D.T
D.T

Answer: A.P
A.P
A.P

36 दोन ट्रेन्सची गती 3:4 गुणोत्तरात आहे. त्या समांतर रुळावरूंद विरूध्द दिशांमध्ये जात आहेत. जर टेलेग्राफ पोस्ट पार करण्यासाठी प्रत्येकीला 3 सेकंद लागत असतील, तर एकमेकांना पूर्णपणे पार करण्यासाठी टेन्सना लागणारा वेळ काढा?

The speeds of two trains are in the ratio 3: 4. They are going in opposite directions along parallel tracks. If each takes 3 seconds to cross a telegraph post, find the time taken by the trains to cross each other completely?

دو ٹرینوں کی رفتار کا تناسب 4:3 ہے۔ وہ متوازی پٹریوں پر مخالف سمت میں جا رہی ہیں۔ اگر ہر ٹرین ٹیلیگراف پوسٹ کو پار کرنے کے لئے 3 سیکنڈ لگائے تو، وقت معلوم کریں، جتنا دونوں ٹرینیں ایک دوسرے کو پار کرنے میں لگائیں گی ؟

A.1 सेकंद
A.1 second
A.1 سیکنڈ

B.3 सेकंद
B.3 seconds
B.3 سیکنڈ

C.5 सेकंद
C.5 seconds
C.5 سیکنڈ

D.7 सेकंद
D.7 seconds
D.7 سیکنڈ

Answer: B.3 सेकंद
B.3 seconds
B.3 سیکنڈ

37 गुणाकार करा:
53672 × 8 = ?

Multiply:
53672 × 8 = ?

ضرب دیں:
53672 × 8= ?

	A.429376 A.429376 A.429376
	B.343676 B.343676 B.343676
	C.534546 C.534546 C.534546
	D.349356 D.349356 D.349356
Answer:	A.429376 A.429376 A.429376

38	जर त्रिकोणाचा एक कोन बरोबर दुसऱ्या दोन कोनांची बेरीज असेल, तर हा त्रिकोण आहे: If one angle of a triangle is equal to the sum of the other two, then the triangle is: اگر مثلث کا ایک زاویہ دوسرے دو کے مجموعہ کے برابر ہے، تو مثلث یہ ہے:
	A.काटकोन त्रिकोण A.Right-angled A.Right-angled
	B.विशाल कोन B.Obtuse-angled B.Obtuse-angled
	C.लघु कोन C.Acute-angled C.Acute-angled
	D.यांपैकी कोणतेही नाही D.None of these D.کوئی نہیں
Answer:	A.काटकोन त्रिकोण A.Right-angled A.Right-angled

39 सूचना: दिलेल्या पर्यायांमधून वेगळे ते बाहेर काढा.

DIRECTIONS: Find the odd one out from the given alternatives.

سمت: دیے گئے متبادل میں سے بے جوڑ کو تلاش کرو۔

A.HIVW
A.HIVW
A.HIVW

B.MKLN
B.MKLN
B.MKLN

C.EFOP
C.EFOP
C.EFOP

D.CDYZ
D.CDYZ
D.CDYZ

Answer: B.MKLN
B.MKLN
B.MKLN

40 **निर्देश:** खालील प्रश्नांमध्ये प्रश्न चिन्हाच्या (?) जागी कोणते अंदाजे मूल्य यायला हवे? (तुम्ही अचूक मूल्य काढण्याचे अपेक्षित नसल्याची नोंद घ्या).

DIRECTIONS: What approximate value should come in place of the question mark (?) in the following questions? (You are not expected to calculate the exact value)

ہدایت:مندرجہ ذیل سوال میں سوال کانشان(؟)کی جگہ پر کونسا تخمینہ ویلیو آئیگا

آپ کو صحیح ویلیو نکالنے کی ضرورت نہی

$5986 \div 364 \times \sqrt{220} = ?$

A. 290

B. 245

C. 200

D. 285

Answer: B. 245

41 एका व्यक्तीने रू. 2000 मधील अंशत: रक्कम 5% प्रति वर्ष दराने कर्जाऊ दिली आणि शिल्लक रक्कम 4% प्रति वर्ष दराने कर्जाऊ दिले. जर त्याला रू. 92 वार्षिक उत्पन्न मिळत असेल, तर तर त्याने 5% ने कर्जाऊ दिलेली रक्कम काढा.

A man lent Rs.2000 partly at 5% per annum and the balance at 4% per annum. If he receives Rs.92 as annual interest, find the amount lent at 5%.

ایک آدمی 2000 روپیہ کا کچھ حصہ5% سالانہ کی در سے قرض دیتا ہے اور 4% سالانہ کی در سے جمع کرتا ہے. اگر وہ 92 روپیہ سالانہ منافہ کی شکل میں حاصل کرتا ہے تو 5% کی در سے قرضہ دیگئی رقم معلوم کریں.

A.रू. 800
A.Rs.800
A.800 روپیہ

B.रू. 900
B.Rs.900
B.900 روپیہ

C.रू. 1000
C.Rs.1000
C.1000 روپیہ

D.रू. 1200
D.Rs.1200
D.1200 روپیہ

Answer: D.रू. 1200
D.Rs.1200
D.1200 روپیہ

42 उद्योगातील आणि दवाखाण्यातील टाकाऊचे योग्य रितीने व्यवस्थापन करणे याला कमी करण्यासाठी सहयोग आहे

Managing industrial and hospital waste in a proper way is a contribution to reduce

فیکٹریوں اور ہسپتالوں کے فضلات کی منظم تنسیق وترتیب_____ میں کمی لانے میں حصہ داری کا ایک طریقہ ہے۔

A.जीडीपी
A.GDP
A.جی ڈی پی (فی کس مجموعی آمدنی)

B.प्रदुषण
B.Pollution
B. آلودگی

C.कर
C.Taxes
C.ٹیکس

D.आय
D.Income
D.آمدنی

Answer: B.प्रदुषण
B.Pollution
B. آلودگی

43 ‘COMPREHENSION’ पासून खालील शब्दांपैकी कोणते शब्द तयार केले जाऊ शकत नाहीत?

Which of the following words cannot be formed from ‘COMPREHENSION’ ?

مندرجہ ذیل الفاظ میں سے کونسا ‘COMPREHENSION’ سے نہیں بنایا جاسکتا ہے؟

A.COMPRISE
A.COMPRISE
A.COMPRISE

B.PENSION
B.PENSION
B.PENSION

C.ONION
C.ONION
C.ONION

D.PREACH
D.PREACH
D.PREACH

Answer: D.PREACH
D.PREACH
D.PREACH

44 वर्तुळावर कोणत्याही दोन बिंदूंना जोडणाऱ्या रेषाखंडाला म्हणतात?

A line segment joining any two points on the circle is called …….?

دائرے پر کسی بھی دو پوائنٹس میں شامل ہونے والی لائن سیگمنٹ کو ..... کہا جاتا ہے؟

A.कंस
A.Arc
A.آرک

B.जीवा
B.Chord
B.کورڈ

C.वर्तुळखंड
C.Segment
C.سیگمنٹ

D.यांपैकी कोणतेही नाही
D.None of these
D.کوئی نہیں

Answer:
B.जीवा
B.Chord
B.کورڈ

45

100 बेरीज असलेल्या दोन संख्या त्यांचा मसावी 8 आहे. त्या संख्या?

Two numbers whose sum is 100 have their H.C.F as 8. The numbers are?

دو نمبر جن کا مجموعہ 100 ہے ان کے ایچ سی ایف ، 8ہے۔ وہ اعداد ہیں؟

A.40, 60
A.40, 60
A.40, 60

B.32, 68
B.32, 68
B.32, 68

C.16, 84
C.16, 84
C.16, 84

D.यांपैकी कोणतेही नाही
D.None of these
D.کوئی نہیں

Answer:
D.यांपैकी कोणतेही नाही
D.None of these
D.کوئی نہیں

46

$$\frac{\sqrt{441}}{25} = ?$$

A. 0.048

B. 0.84

C. 0.48

D. 0.084

Answer: B. 0.84

47 खालील आकृतीमध्ये किती सरळ रेषा आहेत?

How many straight lines are there in the following figure?

نیچے دی ہوئی شکل میں کتنی سیدھی لکیریں ہیں؟

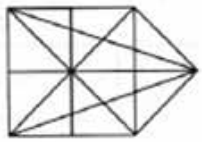

A. 10

B. 12

C. 13

D. 17

Answer: B. 12

48 खालीलपैकी अशुद्ध वाक्य कोणते ?

A.तो गातो.

B.ती गाती.

C.ते गातात.

D.यापैकी नाही.

Answer: B.ती गाती.

49	एक व्यक्ती रांगेत पहिल्यापासून 17 व्या क्रमांकावर आणि शेवटून 13 व्या क्रमांकावर उभा आहे. तर रांगेत एकूण कितीजण उभे आहेत ? A person standing in a queue is 17th from the first and 13th from the last. How many peoples are standing in the queue? ایک شخص کتار میں پہلے سے 17 وے پی اور آخر سے 13 وے پے. کتنے لوگ کتار میں ہے؟
	A.29 A.29 A.29
	B.33 B.33 B.33
	C.45 C.45 C.45
	D.26 D.26 D.26
Answer:	A.29 A.29 A.29

50	Out of the given options which best expresses the meaning of the given Proverb? Two wrongs don’t make a right.
	A.It is appreciable to do something bad to someone just because they did Something bad to you first
	B.It is justice to do something bad to someone just because they did something bad to you first
	C.It is always advisable to do something bad to someone just because they did something bad to you first
	D.It is not acceptable to do something bad to someone just because they did something bad to you first
Answer:	D.It is not acceptable to do something bad to someone just because they did something bad to you first

51

विधान:
बलात्काराच्या घटना वाढत आहेत आणि सरकारची लाज काढली जात आहे.

कृतीचा कोर्स:
I. गुन्हेगारांना कठोर शिक्षा होईल ह्याची खात्री करा.
II. खटल्याच्या जलद सुनावणीची खात्री करा.

Statement:
Cases of rapes are increasing and the government is being put to shame.

Course of actions:
I. Ensure hardest possible punishment to the culprits.
II. Ensure speedy trial

بیان:
X ملک میں ریپ کیسز میں اضافہ ہو رہا ہے اور حکومت کو شرم دلائی جا رہی ہے۔

لائحہ عمل:
I۔ مجرموں کو سخت سے سخت سزا دلوانے کو یقینی بنائیں
II۔ مقدمے کی جلد کاروائی کو یقینی بنایا جائے

A.फक्त I अनुसरून आहे
A.Only I follows
A. صرف I لاگو ہو گا۔

B.फक्त II अनुसरण करते आहे
B.Only II follows
B. صرف II لاگو ہو گا۔

C.एकतर I किंवा II अनुसरून आहे
C.Either I or II follows
C. I یا II میں سے ایک لاگو ہو گا۔

D.I किंवा II दोन्हीपैकी काहीही अनुसरण करत नाही
D.Both I and II follow
D. I اور II میں سے کوئی بھی لاگو نہیں ہو گا۔

Answer:

D.I किंवा II दोन्हीपैकी काहीही अनुसरण करत नाही
D.Both I and II follow
D. I اور II میں سے کوئی بھی لاگو نہیں ہو گا۔

52 $20y^2 + 31y + 12 = 0$ या वर्गसमीकरणाची मुळे आहेत:

The roots of the quadratic equation $x^2 + 729 = 0$ are:

مربع مساوات کے روٹ
$x^2 + 729 = 0$ ہیں:/

A.वास्तविक आणि असमान
A.Real and unequal
A.حقیقی اور غیرمساوی

B.वास्तविक आणि समान
B.Real and equal
B.حقیقی اور مساوی

C.काल्पनिक
C.Imaginary
C.تصوراتی

D.यांपैकी कोणतेही नाही
D.None of these
D.ان میں سے کوئی نہیں

Answer: C.काल्पनिक
C.Imaginary
C.تصوراتی

53 खालीलपैकी सर्वांत मोठा अपूर्णांक शोधा

Find the largest of the following fractions

مندرجہ ذیل کسور میں سے سب سے بڑی کسر تلاش کریں

A.2/9
A.2/9
A.2/9

B.14/16
B.14/16
B.14/16

C.23/21
C.23/21
C.23/21

D.19/17
D.19/17
D.19/17

Answer: D.19/17
D.19/17
D.19/17

54 ज्या परिसरामध्ये प्राणी जगतात, खातात,वाढतात जन्म देतात त्याला म्हणतात ___

The surroundings in which an animal lives, eats, grows and reproduce is called ___

وہ ماحول جسمیں جانور رہتا، کھاتا ، بڑھتا ہے اور اپنی نسل کو بڑھاتا ہے ؛ کہلاتا ہے

A.पर्यावरण
A.Environment
A. ماحولیات

B.मुक्काम
B.Habitat
B. ہیبی ٹیٹ

C.घर
C.Home
C.گھر

D.गृह
D.House
D.گھر

Answer: B.मुक्काम
B.Habitat
B. ہیبی ٹیٹ

55 A ही B ची आईह आहे. B ही C ची बहीण आहे.D हा C चा मुलगा आहे. E हा D चा भाऊ आहे. मग F चे A सोबत नाते काय आहे?

A is the mother of B. B is the sister of C. D is the son of C. E is the brother of D.
How is E related to A?

B A کی ماں ہے.C B کی بہن ہے. C D کا بیٹا ہے. D E کا بھائی ہے. E کا A سے کیا رشتہ ہے؟

A.जावई
A.Son-in-law.
A.داماد

B.सून
B.Daughter-in-law
B.بہو

C.सासरे
C.Father-in-law.
C.سسر

D.नातू
D.Grandson
D.پوتا

Answer: D.नातू
D.Grandson
D.پوتا

56 ड जीवनसत्वाने भरपूर असलेले स्त्रोत कोणते?

Which is the richest source of vitamin-D?

وٹامن ڈی کا سب سے بڑا ذریعہ کیا ہے؟

A.सोय मिल्क
A.Soy Milk
A.سوئے دودھ

B.टुना
B.Tuna
B.تونا

C.चिज
C.Cheese
C.پنیر

D.वरील पैकी सर्व
D.All of the above
D.ان میں سے سبھی

Answer: D.वरील पैकी सर्व
D.All of the above
D.ان میں سے سبھی

57 _____ शरीराच्या इतर सर्व अवयवांवर नियंत्रण करते

_____ controls all other body-organs

دیگر تمام جسم کے اعضاء کو کنٹرول کرتا ہے

A.हृदय
A.Heart
A. دل

B.डोळे
B.Eyes
B. آنکھیں

C.मेंदू
C.Brain
C. دماغ

D.पोट
D.Stomach
D. پیٹ

Answer: C.मेंदू
C.Brain
C. دماغ

58 114 मिनिटांना सेकंदामध्ये रूपांतरीत करा.

Convert 114 minutes in second?

114؟منٹ کو سیکنڈ میں بدلیں

A.5840 सेकंद
A.5840 second
A.5840سیکنڈ

B.6840 सेकंद
B.6840 second
B.6840سیکنڈ

C.4840 सेकंद
C.4840 second
C.4840سیکنڈ

D.4440 सेकंद
D.4440 second
D.4440سیکنڈ

Answer: B.6840 सेकंद
B.6840 second
B.6840سیکنڈ

59

विधान:
भारतात मुलांचा सर्वात जास्त वापर फटके बनवणाऱ्या कंपन्या करतात.

कृतीचा कोर्स:
I. फटाके तयार करण्यावर बंदी घाला.
II. बाल मजुरी बेकायदेशीर बनवा.

Statement:
Fire cracker industry in India employs largest number of children.
Course of actions:
I. Ban manufacturing of fireworks.
II. Make child labour illegal.

بیان:
انڈیا میں بچوں کو ملازمت سب سے زیادہ فائر کریکر انڈسٹری میں دی جاتی ہے۔

لائحہ عمل:
I۔فائر کریکر بنانے پر پابندی لگا دیں
II۔ بچوں کے کام کرنے کو غیر قانونی قرار دیں ۔

A.फक्त I अनुसरून आहे
A.Only I follows
A. صرف I لاگو ہو گا۔

B.फक्त II अनुसरण करते आहे
B.Only II follows
B. صرف II لاگو ہو گا۔

C.एकतर I किंवा II अनुसरून आहे
C.Either I or II follows
C. I یا II میں سے ایک لاگو ہو گا۔

D.I किंवा II दोन्हीपैकी काहीही अनुसरण करत नाही
D.Neither I nor II follows
D. I اور II میں سے کوئی بھی لاگو نہیں ہو گا۔

Answer:

D.I किंवा II दोन्हीपैकी काहीही अनुसरण करत नाही
D.Neither I nor II follows
D. I اور II میں سے کوئی بھی لاگو نہیں ہو گا۔

60

निर्देश: दिलेल्या अंक मालिकेतील चुकीची संज्ञा शोधा:

15, 28, 43, 60, 79, 110, 135

DIRECTIONS: Find the wrong term in the given number series:

15, 28, 43, 60, 79, 110, 135

ہدایت دے گئے نمبرس سرج مے غلط نمبر کھوجے

15, 28, 43, 60, 79, 110, 135

A.110
A.110
A.110

B.28
B.28
B.28

C.60
C.60
C.60

D.135
D.135
D.135

Answer:

D.135
D.135
D.135

61

सरळ रूप द्या:
621621621 + 102102102 = ?

Simplify:
621621621 + 102102102 = ?

آسان بنائیں:
621621621 + 102102102= ?

A.723733723
A.723733723
A.723733723

	B.723723733 B.723723733 B.723723733
	C.723723722 C.723723722 C.723723722
	D.723723723 D.723723723 D.723723723
Answer:	D.723723723 D.723723723 D.723723723

62	सूचना: दिलेल्या पर्यायांमधून वेगळे ते बाहेर काढा. DIRECTIONS: Find the odd one out from the given alternatives. سمت: دیے گئے متبادل میں سے بے جوڑ کو تلاش کرو۔
	A.WITH : TIHW A.WITH : TIHW A.WITH : TIHW
	B.JUST : SUTJ B.JUST : SUTJ B.JUST : SUTJ
	C.DONE : NOED C.DONE : NOED C.DONE : NOED
	D.HAVE : AVEH D.HAVE : AVEH D.HAVE : AVEH
Answer:	D.HAVE : AVEH D.HAVE : AVEH D.HAVE : AVEH

63 निर्देश: खाली दिलेले प्रश्न वर्ण मालिकेवर आधारित आहेत. या प्रत्येक मालिकेत, काही अक्षरे गहाळ आहेत. योग्य पर्याय निवडा पाच पेक्षा अधिक अक्षरे गहाळ असल्यास, मालिकेतील शेवटचे पाच अक्षरे निवडा .

a - cdef - hi - klm - - pq - s

DIRECTION: Questions given below are based on the letter series. In each of these series, some letters are missing. Select the correct alternative. If more than five letters are missing, select the last five letters of the series:

a - cdef - hi - klm - - pq - s

ہدایت نیچے دے ہے سوالات حرف سرج پر مشتمل ہیں . ہر میں کہیں حرف گمشدہ ہے . سہی اختیارات کو چنے . اگر پچ حرف گنمام ہو تو آخری پانچ حرفونکو چنے

a - cdef - hi - klm - - pq - s

A.tuvwx
A.tuvwx
A.tuvwx

B.xxyyx
B.xxyyx
B.xxyyx

C.yxxyx
C.yxxyx
C.yxxyx

D.xyxyx
D.xyxyx
D.xyxyx

Answer: A.tuvwx
A.tuvwx
A.tuvwx

64 खालीलपैकी कोणत्या धातुचा सर्वात जास्त वितळण बिंदू आहे?

Which of the following metal has highest melting point?

مندرجہ ذیل میں سے کونسی دھات میں سب سے زیادہ پگھلاؤ ہوتا ہے؟

A.टंगस्टन
A.Tungsten
A.ٹنگسٹین

B.पारा
B.Mercury
B.مرکری

C.सोने
C.Gold
C.سونا

D.गॅलियम
D.Gallium
D.گیلیم

Answer: A.टंगस्टन
A.Tungsten
A.ٹنگسٹین

65 घरगुती अन्नधान्याच्या अवांछित घटक काढून टाकण्यासाठी पुढीलपैकी कोणती पद्धत वापरली जाते?

Which of the following method is used to remove undesirable components from the food grains in home?

مندرجہ ذیل میں سے کون سا طریقہ گھر میں کھانے کی اشیاء سے غیر پسندیدہ اجزاء کو نکالنے کے لئے استعمال کیا جاتا ہے؟

A.पाखडणे
A.Winnowing
A.چھانٹنا

B.निवडणे
B.Hand Picking
B.ہاتھ سے چُننا

C.अवपातन
C.Sedimentation
C.ترسیپ

D.गाळणे
D.Filtration
D.تقطیر

Answer: B.निवडणे
B.Hand Picking
B.ہاتھ سے چُننا

66 एलईडी टीव्ही ची किंमत रु. 45000 आहे. 10% कमी केल्यावर त्यांची किंमत काय असेल?

The Price of LED TV is Rs. 45000. What will be its price after reduction of 10%?

ایل ای ڈی ٹی وی کی قیمت 45000 روپے ہے 10 فیصد کی کمی کے بعد اس کی قیمت کیا ہو جائے گی ؟

A.₹ 40000
A.₹ 40000
A.₹ 40000

B.₹ 42000
B.₹ 42000
B.₹ 42000

C.₹ 40400
C.₹ 40400
C.₹ 40400

D.₹ 40500
D.₹ 40500
D.₹ 40500

Answer: D.₹ 40500
D.₹ 40500
D.₹ 40500

67 सूचना: खालील प्रश्नांमध्ये दिलेल्या पर्यायांमधून संबंधित अक्षर/शब्द/संख्या निवडा.

पेन : लिहिणे :: गाळणे : ?

DIRECTIONS: In the following question, select the related letter/word/number from the given alternatives.

Pen : Write :: Filter : ?

سمت: مندرجہ ذیل سوال میں، دیے گئے متبادل سے متعلقہ حرف/لفظ/نمبر منتخب کریں۔

قلم : تحریر :: فلٹر : ؟

A.स्वच्छ
A.Clean
A.صاف کرنا

B.शुद्ध करणे
B.Purify
B.پاک کرنا

C.धुणे
C.Wash
C.دھونا

D.स्वच्छ करणे
D.Clear
D.مٹانا

Answer: B.शुद्ध करणे
B.Purify
B.پاک کرنا

68 सूचना: खाली दिलेल्या विधान(A) आणि कारण (R) साठी, खालील पैकी योग्य पर्याय निवडा:

विधान (A): ज्योतिष एक शास्त्र आहे.
कारण (R): ज्योतिष खगोलीय पिंडांचा अभ्यास करत.

DIRECTION: For the Assertion (A) and Reason (R) given below, choose the correct alternative from the following:

Assertion (A): Astrology is a science.
Reason (R): Astrology studies celestial bodies.

ہدایت: نیچے دئیے گئے اسرشن (A) اور (R) وجہ کے لئے، مندرجہ ذیل میں سے صحیح متبادل منتخب کریں:

اسرشن (A): علم نجوم (ایسٹرولوجی ایک سائنس ہے۔
وجہ (R): ایسٹرولوجی میں سیلیسٹئل باڈیز (جرم فلکی) کا مطالعہ کیا جاتا ہے۔

A.दोन्ही (A) आणि (R) सत्य आहेत आणि (R) (A) च योग्य स्पष्टीकरण आहे
A.Both (A) and (R) are true and (R) is the correct explanation of (A)
A. (A) اور (R) دونوں صحیح ہیں اور (R) (A) کی درست وضاحت ہے

B.दोन्ही (A)आणि (R) खरे आहेत, परंतु (R) (A) च योग्य स्पष्टीकरण नाही
B.Both (A) and (R) are true, but (R) is not the correct explanation of (A)
B. (A) اور (R) دونوں صحیح ہیں، لیکن (R) (A) کی درست وضاحت نہیں ہے

C.(A) सत्य आहे, परंतु (R) खोटे आहे
C.(A) is true, but (R) is false
C. (A) صحیح ہے، لیکن (R) غلط ہے

D.(A) खोटे आहे, परंतु (R) सत्य आहे
D.Both (A) and (R) are false
D. (A) اور (R) دونوں غلط ہیں

Answer: D.(A) खोटे आहे, परंतु (R) सत्य आहे
D.Both (A) and (R) are false
D. (A) اور (R) دونوں غلط ہیں

69 'आभाळ फाटणे ' या वाक्प्रचाराचा अर्थ काय ?

A.ढगफुटी होणे.

B.आभाळ मोकळे होणे.

C.खूप रडायला येणे.

D.सर्व बाजूंनी संकटे येणे.

Answer: D.सर्व बाजूंनी संकटे येणे.

70 **सूचना**: दिलेल्या पर्यायांमधून श्रेणी पूर्ण करणारी योग्य आकृती निवडा.

DIRECTIONS: Complete the series by choosing right figure from the given choices.

ہدایات: دیئے گئے اختیارات میں صحیح شکل کا انتخاب کر کے سیریز کو مکمل کیجیئے۔

Problem Figures

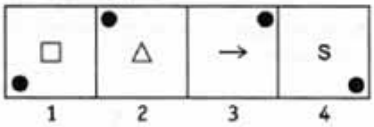

Answer Figures

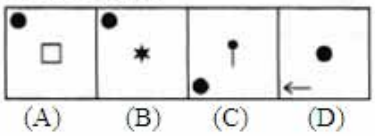

A. (A)

B. (B)

C. (C)

D. (D)

Answer: B. (B)

71 सूचना: अर्थपूर्ण परिच्छेद निर्माण करण्यासाठी, खाली दिलेली (P), (Q) (R), (S) आणि (T) ही पाच वाक्ये योग्य अनुक्रमाने पुनर्रचना करा; त्यांनतर खालील प्रश्नांची उत्तर द्या.
P. एक दिवस मगर नदीच्या बाहेर आली.
Q. फार पूर्वी, एका नदीच्या काठावरील गुलाबी-सफरचंदाच्या झाडावर एक माकड राहत होते.
R. दयाळू माकडाने त्याला काही गुलाबी-सफरचंद दिली.
S. तो पोहून झाडाजवळ गेला आणि त्याला खूप भूक लागल्याचे त्याने माकडाला सांगितले.
T. मगरने त्याला धन्यवाद दिले आणि तो पुन्हा भेटू शकेल काय अशी विचारणा केली.

पुनर्रचना केल्यानंतर खालीलपैकी कोणते वाक्य पाचवे असेल?

DIRECTION: Rearrange the following five sentences (P), (Q), (R), (S) and (T) in the proper sequence to form a meaningful paragraph; then answer the questions given below them.

P. One day, a crocodile came out of the river.
Q. A long time ago, there was a monkey who lived in a rose-apple tree by the side of a river.
R. The kind monkey offered him a few rose-apples.
S. He swam up to the tree and told the monkey that he was very hungry.
T. The crocodile thanked him and asked him if he could visit him again.

Which of the following should be the FIFTH sentence after rearrangement?

ہدایات: ان پانچ جملوں (P)، (Q)، (R)، (S) اور (T) کو با معنی پیرا بنانے کے لئے دوبارہ ترتیب دیجئے، پھر نیچے دے گئے سوالوں کے جواب دیجئے

P. ایک دن، مگرمچھ دریا سے باہر آی
Q. بہت وقت پہلے، ایک بندر تھا جو دریا کے کنارے ایک لال سیب کے پیڑ پر رہتا تھا.
R. رحیم بندر نے اسے کچھ لال سیب دے.
S. وو پیڑ تک تیرا اور بندر سے کہا کہ وو بہت بوکھا ہے
T. مگرمچھ نے اسکا شکریہ کیا اور کہا کہ کیا وو دوبارہ آسکھتا ہے

دوبارہ ترییب دینے کے بعد کون سا جملہ پانچوہ ہونا چاہیے؟

A.T
A.T
A.T

B.S
B.S
B.S

C.Q
C.Q
C.Q

D.R
D.R
D.R

Answer: A.T
A.T
A.T

72 प्रसारकांशी निगडित प्रभाव. बदल घडवते किंवा मनोवृत्ती निर्माण करते. अश्या प्रभावाचे उदाहरण

Media related influences. Change or form an attitude. Eg of such influences is

میڈیا سے متعلق اثرات بھی رویے بدلتے یا اس کی تشکیل کرتے ہیں، بطورِ مثال ایسے اثرات_____ کو شامل ہیں۔

A.इंटरनेट
A.Internet
A.انٹرنٹ

B.ऑडिओ विजूवल मेडिया
B.Audio Visual Media
B. a، b اور c

C.a, b आणि c
C.a, b and c
C.اسکول کی ٹیکسٹ بکس

D.शाळेची पुस्तके
D.School text books

Answer: C.a, b आणि c
C.a, b and c
C.اسکول کی ٹیکسٹ بکس

73 तुम्ही अविवेकी होता जेव्हा इतरांकडून काही अनुचित वर्तणुक दर्शवली जाते. जेव्हा तुम्ही अशी वर्तणुक इतरांना दर्शवता, त्याबद्दल तुम्हाला काय वाटते?

You become rash when some inadequate behavior is shown by others. When you show such behavior to others, what do you think?

جب دوسروں کی طرف سے کچھ ناکافی رویے دکھائے جاتے ہیں تو آپ کو غصہ آتا ہے.جب آپ دوسروں کو اس طرح کے رویے دکھاتے ہیں تو آپ کیا خیال کرتے ہیں؟

A.त्या व्यक्ती अस्वस्थ व्हायला हव्यात कारण ही प्रतिध्वनी सारखी वर्तणुक आहे
A.Those persons should be irritated because it is the echo-like behavior
A.ان افراد کو جلدی تنگ ہونا چاہئے کیونکہ یہ گونج کی طرح رویہ ہے

B.तुम्ही मोठे आहात व तुम्हाला अशी पद्धतीने वागण्याचा हक्क आहे
B.You are elder and have the right to behave in such a manner
B.آپ بڑے ہیں اس طرح کے طرز عمل کا حق رکھتے ہیں

C.तुम्ही जशी इतरांकडून अपेक्षा करता तसेच वागा
C.Behave as you expect from others
C.ایسا رویہ رکھیں، جیسا آپ دوسروں سے توقع کرتے ہیں

D.तुम्ही स्वतःला नियंत्रणात ठेवण्याचा प्रयत्न करता
D.You try to control yourself
D.آپ اپنے آپ کو کنٹرول کرنے کی کوشش کریں.

Answer: D.तुम्ही स्वतःला नियंत्रणात ठेवण्याचा प्रयत्न करता
D.You try to control yourself
D.آپ اپنے آپ کو کنٹرول کرنے کی کوشش کریں.

74 सूचनाः दिलेल्या पर्यायांमधून ऍनालॉगस शब्द निवडा.

हायड्रोजनचा पाण्यासोबत संबंध आहे जसा .....याचा संबंध मीठासोबत आहे.

DIRECTIONS: Choose the analogous word from the given alternatives.

Hydrogen is to water as _____ is to table salt.

ہدایات: دیے گئے متبادل سے مطابق لفظ کا انتخاب کریں

ہائیڈروجن پانی کے لئے ویسے ہی ہے جیسے -------- کھانے کے نمک کے لئے .

A.हेलियम
A.Helium
A. ہیلیم

B.नायट्रोजन
B.Nitrogen
B. نائٹروجن

C.सोडीयम
C.Sodium
C. سوڈیم

D.ऑक्सीजन
D.Oxygen
D. آکسیجن

Answer: C.सोडीयम
C.Sodium
C. سوڈیم

75

मार्च 2013 च्या कोणत्या तारखांना बुधवार होता?

On what dates of March 2013 did Wednesday fall?

مارچ 2013 کی کن تاریخوں کو بدھ تھا؟

A.6, 13, 20, 27
A.6, 13, 20, 27
A.6،13،20،27

B.5, 12, 19, 26
B.5, 12, 19, 26
B.5،12،19،26

C.4, 11, 18, 25
C.4, 11, 18, 25
C.4،11،18،25

D.7, 14, 21, 28
D.7, 14, 21, 28
D.7،14،21،28

Answer:

A.6, 13, 20, 27
A.6, 13, 20, 27
A.6،13،20،27

76

सूचना: खाली दिल्या आकृतीचे प्रतिबिंब शोधून काढा.

DIRECTIONS: Find the mirror image of the figure given below.

ہدایات: نیچے دیئے گئے شکل کی آئینہ معکوس شکل کیا ہوگی۔

मुख्य आकृती
Main Figure
اصل شکل

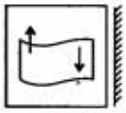

उत्तरासाठी पर्यायी आकृत्या
Answer Figure
جوابی شکل

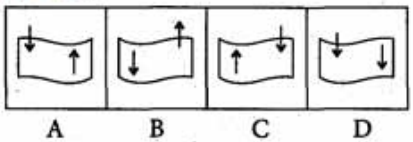

A. (A)

B. (B)

C. (C)

D. (D)

Answer: B. (B)

77 सूचना: येथे दिलेल्या दोन निवेदनांमधून तार्किकदृष्ट्या सुसंगत पर्याय निवडा, परंतु केवळ एका निवेदानातून नाही.
काही पुस्तके ओढे असतात.
काही ओढे स्वयंपाकी नसतात.

DIRECTION: Select the alternative that logically follows from the two given statements, but not from one statement alone.

Some books are brooks.
Some brooks are not cooks.

ہدایت:وہ متبادل منتخب کریں جو دیے گئے دو بیانات کے مطابق ہے، لیکن اکیلے ایک بیان سے نہیں۔

کچھ کتابیں بروکس ہیں۔
کچھ بروکس باورچی ہیں۔

A.सर्व पुस्तके स्वयंपाकी असतात.
A.Some books are cooks.
A.کچھ کتابیں باورچی ہیں۔

B.काही पुस्तके स्वयंपाकी नसतात.
B.Some books are not cooks.
B.کچھ کتابیں باورچی ہیں۔

C.दोन्ही (A) आणि (B)
C.Both (A) and (B)
C.دونوں (A) اور (B)

D.कोणतेही नाही
D.None follows
D.کوئی مطابق نہیں ہے

Answer: D.कोणतेही नाही
D.None follows
D.کوئی مطابق نہیں ہے

78 बऱ्याच वेबसाईट्सला मुख्य पान असते ज्याला म्हणतात ..... जे इतर पानांसाठी मुखपृष्ठाचे काम करते.

Most websites have a main page called the _____ which acts as a doorway to the rest of the website pages.

زیادہ تر ویب سائٹ میں مین صفحہ ہوتا ہے کہاجاتا ہے_____ جو ویب سائٹ کے باقی صدحات کا دروازہ ہوتا ہے۔

A.सर्च इंजिन
A.Search engine
A.سرچ انجن

B.होम पेज
B.Home page
B.ہوم پیج

C.ब्राउजर
C.Browser
C.براوزر

D.युआरअल
D.URL
D.یوآرایل

Answer: B.होम पेज
B.Home page
B.ہوم پیج

For More Info And Videos About TAIT-Exam Syllabus And Other Exam Visit My Channel
BADSHAHimp SubScribe Like & Share YouTube WWW.YouTube.com/BADSHAHimp

79 सूचना: खालील दिलेल्या प्रश्नामध्ये काही विधाने आणि काही निष्कर्ष आहेत. सामन्यात: ज्ञात तथ्यांपेक्षा ते वेगळे असतील तर दिलेली विधाने तुम्हाला सत्य मानवी लागतील आणि त्यानंतर दिलेल्या विधानाचे अनुकरण दिलेल्यापैकी कोणता निष्कर्ष तार्किकदृष्ट्या करतो ते ठरवा.

विधान:
J < C = T ≥ U ≥ R = N
निष्कर्ष:
I. N < C
II. U > J

DIRECTIONS: In the question below, there are few statements followed by few conclusions. You have to take the given statements to be true even if they seem to be at variance with commonly known facts and then decide which of the given conclusion logically follow(s) from the given statements.

Statement:
J < C = T ≥ U ≥ R = N
Conclusions:
I. N < C
II. U > J

ہدایات: مندرجہ ذیل سوال میں، کچھ بیانات کے بعد کچھ نتائج موجود ہیں. اگر آپ کو عام طور پر جانے جاتے حقائق کے ساتھ بھی متغیر ہونے لگے تو بھی آپ دئے گئے بیانات دماغ میں رکھیں اور پھر اس بات کا فیصلہ کریں کہ ذیل میں دیا گیا کونسا نتیجہ منطقانہ طور پر دیے گئے بیانات کی پیروی کرتا ہے.

بیان:
J < C = T≥ U ≥ R = N
نتائج:
N < C .I
U > J .II

A.फक्त I निष्कर्ष खरा आहे
A.Only conclusion I is true
A.صرف نتیجہ I درست ہے

B.फक्त II निष्कर्ष खरा आहे
B.Only conclusion II is true
B.صرف نتیجہ II درست ہے

C.I किंवा II यापैकी एक निष्कर्ष खरा आहे
C.Either conclusion I or II is true
C.یا I یا II نتیجہ درست ہے

D.I व II हे दोन्हीही निष्कर्ष खरे नाहीत
D.Neither conclusion I nor II is true
D.نہ ہی I نہ ہی II نتیجہ درست ہے

Answer: D.I व II हे दोन्हीही निष्कर्ष खरे नाहीत
D.Neither conclusion I nor II is true
D.نہ ہی I نہ ہی II نتیجہ درست ہے

80 धड्यांचे नियोजन ... मध्ये मदत करते

The lesson plan helps in

سبق کی منصوبہ بندی --- میں مدد کرتی ہے

A.वर्गामध्ये सैद्धांतिक ज्ञान वापरण्यासाठी
A.Applying theoretical knowledge in class
A.کلاس میں نظریاتی معلومات کا اطلاق

B.शिकणे-शिकवण्याच्या व्यवस्थापनाच्या संकल्पनेला व्यावहारीक रूप देण्यासाठी
B.Giving practical shape to the concept of management of teaching-learning
B.تدریس--سیکھنے کے انتظام کے تصور کو عملی شکل دینا

C.दोन्ही a आणि b
C.Both a and b
C.a اور b دونوں

D.वरीलपैकी कोणतेही नाही
D.None of the above
D.اوپر سے کوئی بھی نہیں

Answer: C.दोन्ही a आणि b
C.Both a and b
C.a اور b دونوں

81 ‘ पत्नी ’ या शब्दाचा समानार्थी शब्द कोणता ?

A.भार्या

B.बायको

C.कांता

D.वरील सर्व

Answer: D.वरील सर्व

For More Info And Videos About TAIT-Exam Syllabus And Other Exam Visit My Channel
BADSHAHimp SubScribe Like & Share WWW.YouTube.com/BADSHAHimp

82 निर्देश: पुढील प्रश्नांपैकी प्रत्येक प्रश्नात एक संख्या गहाळ आहे. मालिकेचा नमुना समजून घ्या आणि योग्य संख्या निवडा.
2, ..., 8, 16, 32, 64, 128, 256

DIRECTION: In each of the following questions, one number is missing in the series. You have to understand the pattern of the series and insert the number.

2, ..., 8, 16, 32, 64, 128, 256

ہدایت جیل کے ہر سوال میں سرج کا ایک نمبر گمشدہ ہے . آپکو اس سرج کو سمجھنا ہے. اور گمشدہ نمبر کو یہا کھوجنا ہے

2, ..., 8, 16, 32, 64, 128, 256

A.2
A.2
A.2

B.3
B.3
B.3

C.5
C.5
C.5

D.4
D.4
D.4

Answer: D.4
D.4
D.4

83 शिंझो अबे हे _____आहेत

Shinzo Abe is the –

شینزو آبے _____ ہیں

A.जपानचे राष्ट्राध्यक्ष
A.President of Japan
A.جاپان کے صدر

B.दक्षिण कोरीयाचे राष्ट्राध्यक्ष
B.President of South Korea
B.جنوبی کوریا کے صدر

C.जपानचे पंत प्रधान
C.Prime Minister of Japan
C.جاپان کے وزیر اعظم

D.दक्षिण कोरीयाचे पंत प्रधान
D.Prime Minister of South Korea
D.جنوبی کوریا کے وزیراعظم

Answer: C.जपानचे पंत प्रधान
C.Prime Minister of Japan
C.جاپان کے وزیر اعظم

84 वर्तमान काळामध्ये, सर्वसाधारण जनतेकडून शिक्षकांच्या प्रतिष्ठेची पातळी — म्हणून ओळखली जाते

In present times, the prestige level of teachers is recognized by the general public as—

موجودہ وقت میں، اساتذہ کی وقار کی سطح عام عوام کی طرف سے ایسے تسلیم کی جاتی ہے-

A.व्यावसायिक कामगारापेक्षा वरची
A.Above that of professional worker
A.پیشہ ورانہ کارکن کے اوپر

B.व्यावसायिक कामगारवर्गाच्या बरोबरीची
B.On a par with the professional class of workers
B.پیشہ ور طبقے کے پار کے ساتھ

C.मजुरी कमावणारे किंवा मजुरांच्या बरोबरीची
C.On a par with the wage earner or labour
C.اجرت کمانے والے یا مزدور کے ساتھ

D.मजूर किंवा व्यावसायिक कामगारांच्या थोडीफार मधली
D.Somewhere between wage earner and professional worker
D.مزدوری اور پیشہ ورانہ کارکن کے درمیان کہیں

Answer: D.मजूर किंवा व्यावसायिक कामगारांच्या थोडीफार मधली
D.Somewhere between wage earner and professional worker
D.مزدوری اور پیشہ ورانہ کارکن کے درمیان کہیں

85 महावीर हे _____या धर्माशी संबंधित आहेत

Mahavira is related to the religion of –

مہاویر کا تعلق _____ مذہب سے ہے

For More Info And Videos About TAIT-Exam Syllabus And Other Exam Visit My Channel
BADSHAHimp SubScribe Like & Share YouTube WWW.YouTube.com/BADSHAHimp

A.बुध्द धर्म
A.Buddhism
A.بدھ مت

B.जैन धर्म
B.Jainism
B.جین مت

C.हिंदू धर्म
C.Hinduism
C.ہندو مت

D.झीयोनियम
D.Zionism
D.صیہُونیَت

Answer: B.जैन धर्म
B.Jainism
B.جین مت

86 (9/56) ÷ (3/8) × (7/3) = ?

(9/56) ÷ (3/8) × (7/3) = ?

(9/56) ÷ (3/8) × (7/3) = ?

A.0
A.0
A.0

B.1
B.1
B.1

C.2
C.2
C.2

D.3
D.3
D.3

Answer: B.1
B.1
B.1

For More Info And Videos About TAIT-Exam Syllabus And Other Exam Visit My Channel
BADSHAHimp SubScribe Like & Share YouTube WWW.YouTube.com/BADSHAHimp

87	पुढीलपैकी विकासाचे तत्त्व कोणते आहे Which of the following is a principle of development مندرجہ ذیل میں سے کون ڈولپمینٹ کا اصول ہے
	A.तो सर्वांना एकाच ठिकाणी पोचवत नाही A.it does not proceed at the same place for all A.یہ ایک ہی جگہ پر سب کے لئے لاگو نہیں ہوتا
	B.विकास हा एक-मितीय असतो B.development is one dimensional B.ترقی ایک ابعادی ہے
	C.ती सतत चालणारी प्रक्रिया नाही C.it is not a continuous process C.یہ مسلسل چلنے والا عمل نہیں ہے
	D.वरीलपैकी कोणतेही नाही D.none of the above D.درج بالا میں سے کوئی نہیں
Answer:	A.तो सर्वांना एकाच ठिकाणी पोचवत नाही A.it does not proceed at the same place for all A.یہ ایک ہی جگہ پر سب کے لئے لاگو نہیں ہوتا

88 सूचना: खाली दिलेल्या प्रश्नात एक विधान आहे ज्याचे I आणि II असे दोन निष्कर्ष त्याखाली अंकित केलेले आहेत. या आधारे सर्वात योग्य पर्याय निवडा.

विधान:
दिल्ली सरकारने प्रदूषण नियंत्रणासाठी डीझेल वर चालणाऱ्या रिक्षांना बंदी घातली.

निष्कर्ष:
I. डीझेल वर चालणाऱ्या रिक्षांमुळे प्रदूषण होते.
II. डीझेल वर चालणाऱ्या बसगाड्या पर्यावरणपूरक आहेत.

DIRECTIONS: The question below has a statement followed by two conclusions numbered I and II. Based on this choose the option that is most suitable

Statement:
Government of Delhi has banned the use of diesel autos for controlling pollution.

Conclusions:
I. Diesel autos cause pollution.
II. Diesel busses are eco-friendly.

ہدایات: نیچے دیے گئے سوال میں ایک بیان کے بعد دو نتائج I اور II دیے گئے ہیں۔ اس کی بنیاد پرانتہائی موزوں آپشن کا انتخاب کیجیے۔

بیان:
دلی حکومت نے آلودگی کو کنٹرول کرنے کے لئے ڈیزل آٹوز کے استعمال پر پابندی عائد کردی ہے.

نتیجے:
I. ڈیزل آٹوز آلودگی پیدا کرتے ہیں.
II. ڈیزل بسیں ماحول دوست ہیں.

A.केवळ निष्कर्ष क्रमांक I विधानास अनुसरून आहे
A.Only Conclusion I follows
A. صرف نتیجہ I لاگو ہو گا۔

B.केवळ निष्कर्ष क्रमांक II विधानास अनुसरून आहे
B.Only Conclusions II follows
B. صرف نتیجہ II لاگو ہو گا۔

C.निष्कर्ष क्रमांक I किंवा II अनुसरून आहे
C.Either I or II follows
C. I یا II میں سے ایک لاگو ہو گا۔

D.कोणताही निष्कर्ष अनुसरून नाही
D.Neither I nor II follow
D. I اور II میں سے کوئی بھی لاگو نہیں ہو گا۔

Answer: A.केवळ निष्कर्ष क्रमांक I विधानास अनुसरून आहे
A.Only Conclusion I follows
A. صرف نتیجہ I لاگو ہو گا۔

89 2574 या संख्येमध्ये 7 आणि 5 च्या स्थान मूल्यामधील फरक काय आहे?

What is the difference between the place value of 7 and 5 in the number 2574?

عدد2574 میں 7 اور 5 کی مقامی قیمت میں کیا فرق ہے؟

A.430
A.430
A.430

B.570
B.570
B.570

C.403
C.403
C.403

D.413
D.413
D.413

Answer: A.430
A.430
A.430

90 ‘ नमस्कार ‘ या शब्दाचा समानार्थी शब्द कोणता ?

A.प्रणिपात

B.जय हो!

C.राम राम !

D.वरील सर्व

Answer: A.प्रणिपात

91 Out of the given four words only one is not spelt correctly. Find the word that is not correctly spelt.

A.Apearence

B.Mischievous

C.Personnel

D.Schedule

Answer: A.Apearence

92 रवींद्रनाथ टागोरांनी कोणत्या देशाचे राष्ट्रगीत लिहिले –

Rabindranath Tagore had written the national anthem/s of –

راویندرناتھ ٹیگور نے _____ کے قومی ترانہ/ترانوں کو لکھا تھا

A.भारत
A.India
A. ہندوستان

B.श्रीलंका
B.Sri Lanka
B.سری لنکا

C.वरीलपैकी दोन्ही
C.Both of the above
C.اوپر کے دونوں

D.यांपैकी कोणतेही नाही
D.None of these
D.ان میں سے کوئی نہیں

Answer: C.वरीलपैकी दोन्ही
C.Both of the above
C.اوپر کے دونوں

93 **एकाच फाशाच्या चार अवस्थांवरून 5 ठिपके असणाऱ्या बाजूच्या विरुद्ध बाजूवर किती ठिपके असतील ते शोधून काढा.**

From the given four positions of a single dice, find the number of dots at the face opposite to the face having 5 dots.

ہدایات: ایک پاسہ کی دی گئی چار حالتوں میں سے، ایک پاسہ کے منہ پر نقطوں کی گنتی کو دریافت کیجیئے، جس کے سامنےوالے پاسہ کے منہ پر5 نقطہ ہے؟

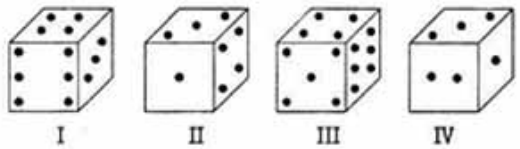

A. 2

B. 3

C. 5

D. 6

Answer: B. 3

94 सूचना: प्रत्येक प्रश्नाला एक प्रमुख विधानासोबत चार विधाने आहेत ज्यांच्याखाली A, B, C, आणि D असे चार विधान आहेत. क्रमवार विधानांची जोडी निवडा ज्यामध्ये प्रथम विधान दुसऱ्या विधानाला सुचवते, आणि दोन्ही विधाने तर्किकदृष्ट्या प्रमुख विधानासोबत निगडित असेल.

हे पुस्तक मनोरंजक आहे किंवा
कंटाळवाणे आहे
A. हे पुस्तक मनोरंजक आहे.
B. हे पुस्तक मनोरंजक नाही.
C. हे पुस्तक कंटाळवाणे आहे.
D. हे पुस्तक कंटाळवाणे नाही.

DIRECTIONS: Each question has a main statement followed by four statements labelled A, B, C and D. Choose the ordered pair of statements, where the first statement implies the second, and the two statements are logically consistent with the main statement.

The book is either interesting or boring.
A.The book is interesting
B.The book is not interesting
C.The book is boring
D.The book is not boring

ہدایت: ہر سوال میں ایک جملہ ہے جسکے بعد چار جملےاے، بی،سی اور ڈی کے نام سے دئے گئے ہیں اسمیں منسلک جوڑیوں کو چنئے۔ جہاں پہلا جملہ دوسرے جملہ کی اور اشارہ کر رہا ہے اور دو جملے منطقی مرکزی بیان کے مطابق ہیں

کتاب یا تو دلچسپ ہے یا بورنگ
Aکتاب دلچسپ ہے ۔
Bکتاب دلچسپ نہیں ہے ۔
Cکتاب بورنگ ہے ۔
Dکتاب بورنگ نہیں ہے ۔

A.AC
A.AC
A.AC

B.DA
B.DA
B.DA

C.CB
C.CB
C.CB

D.AB
D.AB
D.AB

Answer: B.DA
B.DA
B.DA

95 सूचना : खालील प्रत्येक प्रश्नात दोन विधाने I आणि II दिलेले आहेत. हे विधान एकतर स्वतंत्र कारण असू शकतात किंवा स्वतंत्र कारणांचे परिणाम असू शकतात. यांपैकी एक विधान इतर विधानाचा परिणाम असू शकतो. दोन्ही विधाने वाचा आणि खालीलपैकी कोणत्या उत्तराचा पर्याय या दोन्ही विधानांमधील संबंधांचे वर्णन करतो ते ठरवा.

विधान :
I. दुष्काळग्रस्त भागांतील शेतकरी आपले उत्पादन सरकारला विकत नाही आहे.
II. सरकारने खरेदी दर कमी केले आहेत ज्यावर शेतक-यांकडून खरेदी केली जाते.

DIRECTIONS: Below in each question are given two statements I and II. These statements may be either independent causes or may be effects of independent causes. One of these statements may be the effect of the other statement. Read both the statements and decide which of the following answer choice correctly depicts the relationship between these two statements.

Statements:
I. The farmers in drought affected areas are not selling their produce to the government.
II. The government has reduced the procurement rates at which it buys from the farmers.

زاد وجوہات یا پھر آزاد وجوہات کے اثرات ہو سکتے ہیں۔ انہیں گئے ہیں۔ یہ بیانات یا تو آ II اور I ہدایات: نیچے ہر سوال میں دو بیانات بیانات میں سے ایک بیان دوسرے کا اثر ہو سکتا ہے۔دونوں بیانات پڑھیں اور فیصلہ کریں کہ نیچے دیے گئے کس جواب کا انتخاب ان دونوں بیانات کے در میان تعلق کو ٹھیک سے ظاہر کرتا ہے۔

بیانات:
I –قحط زدہ علاقوں کے کسان اپنی پیداوار حکومت کو فروخت نہیں کر رہے ہیں۔
II ۔ حکومت نے کسانوں سے فصل کی خریداری کی قیمتوں میں کمی کر دی ہے۔

A.विधान I कारण आहे आणि विधान II त्याचा परिणाम आहे;
A.Statement I is the cause and statement II is its effect;
A.بیان نمبر I وجہ ہے اور بیان نمبر II اس کا اثر ہے۔

B.विधान II कारण आहे आणि विधान I त्याचा परिणाम आहे
B.Statement II is the cause and statement I is its effect;
B.بیان نمبر II وجہ ہے اور بیان نمبر I اس کا اثر ہے۔

C.विधान I आणि II दोन्ही स्वतंत्र कारणे आहेत;
C.Both the statements I and II are independent causes;
C.دونوں بیانات نمبر I اور نمبر II آزاد وجوہات ہیں۔

D.विधान I आणि II दोन्ही स्वतंत्र कारणांचे परिणाम आहेत;
D.Both the statements I and II are effects of independent causes;
D.دونوں بیانات نمبر I اور نمبر II آزاد وجوہات کے اثرات ہیں۔

Answer: B.विधान II कारण आहे आणि विधान I त्याचा परिणाम आहे
B.Statement II is the cause and statement I is its effect;
B.بیان نمبر II وجہ ہے اور بیان نمبر I اس کا اثر ہے۔

96 जर तुमच्या विरूद्धलिंगी असलेला एक शिक्षक सहकार्यासाठी विनंती करतो तेव्हा तुम्हाला काय वाटेल?

What will you think in case of a teacher of your opposite gender makes a request for co-operation?

آپ سے جنس مخالف کا استاد کوئی تعاون مانگے تو اس سلسلے میں آپ کا کیا خیال ہوگا؟

A.सहकार्य तेव्हाच दिले पाहीजे जेव्हा तो/ती त्यासाठी पात्र आहे
A.Co-operation should be given only when he/she deserves it
A.تعاون صرف اس وقت دیا جانا چاہئے جب وہ اس کا مستحق ہو

B.सहकार्य गरीब आणि स्त्रीयांच्या गरजांप्रमाणे दिले पाहीजे
B.Co-operation should be given as per demand of the poor and fair-sex
B.کمزور اور منصفانہ جنسی مطالبے کے مطابق تعاون دیا جاناچاہیے

C.सहकार्य दिलेच पाहीजे, जर तो/ती पुन्हा पुन्हा तुमच्यामागे लागत असेल
C.Co-operation should be given only, if he/she follows you blindly
C.تعاون صرف اسے دیا جانا چاہئے، جو آپ کی اندھا دھند پیروی کرے

D.सहकार्य एखाद्या सहकाऱ्याला दिले पाहीजे, मग तो/ती कोणीही असो
D.Co-operation should be extended to a colleague, irrespective of his/her gender
D.صنف سے قطع نظر تعاون کسی بھی ساتھی کو دیا جانا چاہئے

Answer: D.सहकार्य एखाद्या सहकाऱ्याला दिले पाहीजे, मग तो/ती कोणीही असो
D.Co-operation should be extended to a colleague, irrespective of his/her gender
D.صنف سے قطع نظر تعاون کسی بھی ساتھی کو دیا جانا چاہئے

97 M ही D ची बहीण आहे. R हा D चा भाऊ आहे. F हा M चा वडील आणि T ही R ची आई आहे. मग D चे T सोबत नाते काय आहे?

M is sister of D. R is brother of D. F is father of M and T is mother of R. How is D related to T?

D M کی بہن ہے. D R کا بھائی ہے. M F کا بھائی ہے اور M T کی ماں ہے. D کا T سے کیا رشتہ ہے؟

A.भाऊ
A.Brother
A.بھائی

B.मुलगा
B.Son
B.بیٹا

C.मुलगी
C.Daughter
C.بیٹی

D.मुलगा किंवा मुलगी
D.Son or Daughter
D.بیٹا یا بیٹی

Answer: D.मुलगा किंवा मुलगी
D.Son or Daughter
D.بیٹا یا بیٹی

98 जर त्रिकोण ABC च्या बाजू AB = 4 सेंमी, BC = 3 सेंमी आणि AC = 5 सेंमी आहेत, तर त्रिकोण ABC चे क्षेत्रफळ काय आहे:

If sides of a triangle ABC are AB = 4 cm, BC = 3 cm and AC = 5 cm then area of the triangle ABC is:

اگر ایک مثلث ABC کی طرفیں AB = 4 سینٹی میٹر، BC =3 سینٹی میٹر، اور AC =5 سینٹی میٹر، تو ABC مثلث کا رقبہ ہے:

A.3 सेंमी^{2}
A.3 cm^2
A.3مربع سینٹی میٹر

B.6 सेंमी^{2}
B.6 cm^2
B.6مربع سینٹی میٹر

C.4 सेंमी^{2}
C.4 cm^2
C.4مربع سینٹی میٹر

D.2 सेंमी^{2}
D.2 cm^2
D.2 مربع سینٹی میٹر

Answer: B.6 सेंमी^{2}
B.6 cm^2
B.6 مربع سینٹی میٹر

99 जर ${}^nC_2 = {}^nC_{10}$ तर n चे मूल्य आहे

If ${}^nC_2 = {}^nC_{10}$ then the value of n is

اگر ${}^nC_2 = {}^nC_{10}$ تو n کی قیمت

A.10
A.10
A.10

B.2
B.2
B.2

C.8
C.8
C.8

D.12
D.12
D.12

Answer: D.12
D.12
D.12

100 सूचना: खालील माहितीचा काळजीपूर्वक अभ्यास करा आणि दिलेल्या प्रश्नांची उत्तरे द्या.
आठ मित्र - A, B, C, D, E, F, G आणि H — हे अशा चौरसकार टेबलाभोवती बसले आहेत की त्यापैकी चार जण टेबलच्या चार कोप-यांवर बसले आहेत तर इतर चार त्या चार बाजूंच्या मध्यभागी बसले आहेत. ते जे चार बाजूंच्या मध्यभागी बसून आहेत ते मध्याभागाकडे बघत आहेत तर जे लोक चार कोपऱ्यांवर बसले आहेत ते बाहेर बघत आहेत.
A हा C च्या डाव्या बाजूला तिसरा आहे, जो कोणत्याही कोपऱ्यांवर नाही बसला आहे. E हा F च्या डाव्या बाजूला तिसरा आहे, जो C चा तत्काळ शेजारी नाही. B आणि H हे एकमेकांचे तत्काळ शेजारी हि नाहीत किंवा क्रमशः A आणि D चे हि तत्काळ शेजारी नाहीत. D कुठल्याही बाजूच्या मध्यभागी बसलेला नाही आणि कमीतकमी दोन व्यक्ती A आणि D च्या मध्ये बसलेले पाहिजेत. E आणि G एकमेकांसमोर बसलेले आहेत परंतु एकमेकांना तोंड देत नाहीत. F हा C च्या विरुद्ध बसू शकत नाही.
खालीलपैकी कोण H च्या डाव्या बाजूस तिसऱ्या क्रमांका वर बसतो?

DIRECTIONS: Study the following information carefully and answer the given questions.
Eight friends – A, B, C, D, E, F, G and H— are sitting around a square table in such a way that four of them sit at four corners of the table while the other four sit in the middle of the four sides. Those who sit in the middle of the four sides face the centre while those who sit at the four corners face outside.
A sits third to the left of C, who does not sit at any of the corners. E sits third to the left of F, who is not an immediate neighbour of C. B and H are neither immediate neighbours of each other nor of A and D respectively. D does not sit in the middle of any sides and at least two person should sit between A and D. E and G sit opposite to each other but do not face each other. F cannot sit opposite C.
Who among the following sits third to the left of H?

ہدایات: مندرجہ ذیل معلومات کو دھیان سے پڑھیں اور دیے گئے سوالوں کے جواب دیں۔
ایک مربع میز کے ارد گرد بیٹھے ہوئے ہیں اس طرح سے کہ ان میں سے چار میز کے چار کونوں پر بیٹھا ہے جبکہ باقی چار چاروں کناروں کے درمیان میں بیٹھے ہیں۔ جو لوگ چاروں کونوں کے درمیان میں بیٹھے ہیں ان کا رخ مرکز کی طرف جبکہ چاروں کناروں پر بیٹھے لوگوں کا رخ باہر کی طرف ہے۔ - آٹھ دوست A، B، C، D، E، F، G اور H –
A، C کا C کے بائیں سے تیسرے پر بیٹھا ہے، جو E، F کے بائیں طرف سے تیسرے پر بیٹھا ہے، جو کسی بھی کونے پر نہیں بیٹھا ہے۔ کسی بھی کناروں کے درمیان میں D کے پڑوسی ہیں۔ D اور A نہ تو بالترتیب ایک دوسرے کے اور نہ ہی Hاور B فوری پڑوسی نہیں ہے۔ ایک دوسرے کے مخالف بیٹھے ہوئے ہیں لیکن G اور E کے درمیان کم سے کم دو لوگ بیٹھے ہونے چاہیے۔ D اور A نہیں بیٹھا ہے اور کے مخالف نہیں بیٹھ سکتا ہے۔ F، C ایک دوسرے کا سامنا نہیں کر رہے ہیں۔
کے بائیں طرف سے تیسرے پر بیٹھا ہے؟ H مندرجہ ذیل میں سے کون

A.B
A.B
A.B

B.G
B.G
B.G

C.D
C.D
C.D

D.C
D.C
D.C

Answer: C.D
C.D
C.D

101 _____च्या बाबतीत आपण तुळई किंवा टेबलाखाली उभे रहावे –

We should stand under a beam or a table in the case of a –

_____ کی صورت میں ہمیں بیم اور ٹیبل کے نیچے کھڑا ہونا چاہیے

A.ज्वालामुखीचा उद्रेक
A.Volcano eruption
A.آتش فشاں

B.पूर
B.Flood
B.سیلاب

C.भूकंप
C.Earthquake
C.زلزلہ

D.यांपैकी कोणतेही नाही
D.None of these
D.ان میں سے کوئی نہیں

Answer: C.भूकंप
C.Earthquake
C.زلزلہ

102

निर्देश: खालील शब्दांची तार्किक क्रमाने मांडणी करा:

(i) साप्ताहिक
(ii) दैनिक
(iii) मासिक
(iv) पंधरवडा
(v) द्विमासिक

DIRECTIONS: Arrange the following in a logical order:

(i) Weekly
(ii) Daily
(iii) Monthly
(iv) Fortnightly
(v) Bimonthly

ہدایات: ایک منطقی ترتیب میں مندرجہ ذیل کو مرتب کریں:

(i) ہفتہ وار
(ii) روزانہ
(iii) ماہانہ
(iv)پخودا
(وی) دو ماہانہ

A.(i) (iv), (iii), (ii), (v)
A.(i) (iv), (iii), (ii), (v)
A.(i) (iv), (iii), (ii), (v)

B.(ii), (i), (iv), (iii), (v)
B.(ii), (i), (iv), (iii), (v)
B.(ii), (i), (iv), (iii), (v)

C.(iv), (i), (ii), (iii), (v)
C.(iv), (i), (ii), (iii), (v)
C.(iv), (i), (ii), (iii), (v)

D.(v), (i), (ii), (iii), (iv)
D.(v), (i), (ii), (iii), (iv)
D.(v), (i), (ii), (iii), (iv)

Answer: B.(ii), (i), (iv), (iii), (v)
B.(ii), (i), (iv), (iii), (v)
B.(ii), (i), (iv), (iii), (v)

103 इच्छिलेली वस्तू देणारी गाय --------

A.कपिला

	B.गोमाता
	C.गायत्री
	D.कामधेनू
Answer:	D.कामधेनू

104	निर्देश: खालील शब्दांची इंग्रजी शब्दकोशानुसार मांडणी करा. (a) Spine (b) Spinal (c) Spinner (d) Spinet (e) Spindle DIRECTIONS: Arrange the following words according to the English dictionary. (a) Spine (b) Spinal (c) Spinner (d) Spinet (e) Spindle ہدایت: انگریزی لغت کے مطابق مندرجہ ذیل الفاظ کو مرتب کریں۔(a) Spine (b) Spinal (c) Spinner (d) Spinet (e) Spindle
	A.(b), (e), (a), (d), (c) A.(b), (e), (a), (d), (c) A.(b), (e), (a), (d), (c)
	B.(e), (c), (a), (d), (b) B.(e), (c), (a), (d), (b) B.(e), (c), (a), (d), (b)
	C.(a), (e), (c), (d), (b) C.(a), (e), (c), (d), (b) C.(a), (e), (c), (d), (b)
	D.(c), (e), (a), (d), (b) D.(c), (e), (a), (d), (b) D.(c), (e), (a), (d), (b)
Answer:	A.(b), (e), (a), (d), (c) A.(b), (e), (a), (d), (c) A.(b), (e), (a), (d), (c)

105	प्रश्नासाठी सूचना: खालील मालिका पूर्ण करा. G, J, N, Q, U, _____ _____ DIRECTION: Complete the following series. G, J, N, Q, U, _____ _____ سوال کے لیے ہدایت:مندرجہ ذیل سیریز کو مکمل کریں۔ G, J, N, Q, U _____ _____
	A.W A.W A.W
	B.X B.X B.X
	C.Y C.Y C.Y
	D.Z D.Z D.Z
Answer:	B.X B.X B.X
106	मोजमापाचे कार्य म्हणजे The function of measurement is پیمائش کا کام ہے
	A.पूर्वनिदान A.Prognosis A.پروگنوسس
	B.निदान B.Diagnosis B.تشخیص

C.संशोधन
C.Research
C.تحقیق

D.वरील सर्व
D.All of these
D.مذکورہ تمام

Answer: D.वरील सर्व
D.All of these
D.مذکورہ تمام

107 जर सकाळी लवकर शेजाऱ्याकडून टेलिफोन कॉल आला, तर अशा स्थितीत तुम्हाला काय करायला आवडेल?

If there is a telephone call from the neighbour early in the morning, what would you like to do in such conditions?

اگر صبح کے وقت پڑوس سے ٹیلی فون کال آئے، تو آپ اس طرح کے حالات میں کیا کرنا چاہیں گے؟

A.तुम्ही फोन घेण्यास नकार द्याल
A.You refuse to attend
A.آپ شرکت کرنے سے انکار کرتے ہیں

B.तुम्ही त्याला काही वेळाने पुन्हा फोन करण्याची सूचना द्याल
B.You instruct him to call again after some time
B.آپ انہیں ہدایت دیتے ہیں کہ کچھ وقت بعد دوبارہ فون کریں

C.तुम्ही एक चांगला शेजारी म्हणून जास्तीतजास्त मदत देऊ कराल
C.You extend maximum help as a good neighbour
C.آپ ایک اچھے پڑوسی کے طور پر زیادہ سے زیادہ مدد فراہم کرتے ہیں

D.तुम्ही टेलिफोन ताबडतोब कट कराल
D.You delink the telephone immediately.
D.آپ کو فوری طور پر ٹیلی فون منقطع کردیں گے.

Answer: C.तुम्ही एक चांगला शेजारी म्हणून जास्तीतजास्त मदत देऊ कराल
C.You extend maximum help as a good neighbour
C.آپ ایک اچھے پڑوسی کے طور پر زیادہ سے زیادہ مدد فراہم کرتے ہیں

108 सूचना: खालील प्रश्नांमध्ये दिलेल्या पर्यायांमधून संबंधित अक्षर समूह निवडा.

HKNQ : ABCD :: SVYB : ?

DIRECTIONS: In the following question, select the related group of letters from the given alternatives.

HKNQ : ABCD :: SVYB : ?

سمت: مندرجہ ذیل سوال میں، دیے گئے متبادل میں سے حروف کا متعلقہ گروپ منتخب کریں۔

HKNQ : ABCD :: SVYB : ?

A.TQMK
A.TQMK
A.TQMK

B.WXYZ
B.WXYZ
B.WXYZ

C.ZVTQ
C.ZVTQ
C.ZVTQ

D.ADGJ
D.ADGJ
D.ADGJ

Answer: B.WXYZ
B.WXYZ
B.WXYZ

109 Out of the given options, choose the one which is the correct passive voice of the sentence given below.
Who does not obey you?

A.You are not obey by who?

B.You are not obey by whom?

C.By who are you not obeyed for?

D.By whom are you not obeyed?

Answer: D.By whom are you not obeyed?

110 सूचना: खालील माहितीचा काळजीपूर्वक अभ्यास करा आणि दिलेल्या प्रश्नांची उत्तरे द्या.
आठ मित्र - A, B, C, D, E, F, G आणि H — हे अशा चौरसकार टेबलाभोवती बसले आहेत की त्यापैकी चार जण टेबलच्या चार कोप-यांवर बसले आहेत तर इतर चार त्या चार बाजूंच्या मध्यभागी बसले आहेत. ते जे चार बाजूंच्या मध्यभागी बसून आहेत ते मध्याभागाकडे बघत आहेत तर जे लोक चार कोपऱ्यांवर बसले आहेत ते बाहेर बघत आहेत.
A हा C च्या डाव्या बाजूला तिसरा आहे, जो कोणत्याही कोपऱ्यांवर नाही बसला आहे. E हा F च्या डाव्या बाजूला तिसरा आहे, जो C चा तत्काळ शेजारी नाही. B आणि H हे एकमेकांचे तत्काळ शेजारी हि नाहीत किंवा क्रमशः A आणि D चे हि तत्काळ शेजारी नाहीत. D कुठल्याही बाजूच्या मध्यभागी बसलेला नाही आणि कमीतकमी दोन व्यक्ती A आणि D च्या मध्ये बसलेले पाहिजेत. E आणि G एकमेकांसमोर बसलेले आहेत परंतु एकमेकांना तोंड देत नाहीत. F हा C च्या विरुद्ध बसू शकत नाही.
Fच्या संदर्भामध्ये Bची स्थिती काय असेल?

DIRECTIONS: Study the following information carefully and answer the given questions.
Eight friends – A, B, C, D, E, F, G and H— are sitting around a square table in such a way that four of them sit at four corners of the table while the other four sit in the middle of the four sides. Those who sit in the middle of the four sides face the centre while those who sit at the four corners face outside.
A sits third to the left of C, who does not sit at any of the corners. E sits third to the left of F, who is not an immediate neighbour of C. B and H are neither immediate neighbours of each other nor of A and D respectively. D does not sit in the middle of any sides and at least two person should sit between A and D. E and G sit opposite to each other but do not face each other. F cannot sit opposite C.
What is the position of B with respect to F?

ہدایات: مندرجہ ذیل معلومات کو دھیان سے پڑھیں اور دیے گئے سوالوں کے جواب دیں۔
ایک مربع میز کے ارد گرد بیٹھے ہوئے ہیں اس طرح سے کہ ان میں سے چار میز کے – H اور G، F، E، D، C، B، A - آٹھ دوست چاروں کونوں پر بیٹھا ہے جبکہ باقی چار چاروں کناروں کے درمیان میں بیٹھے ہیں۔ جو لوگ چاروں کونوں کے درمیان میں بیٹھے ہیں ان کا رخ مرکز کی طرف جبکہ چاروں کناروں پر بیٹھے لوگوں کا رخ باہر کی طرف ہے۔
A، C کا C کے بائیں سے تیسرے پر بیٹھا ہے، جو E، F کے بائیں طرف سے تیسرے پر بیٹھا ہے، جو کسی بھی کونے پر نہیں بیٹھا ہے۔ کسی بھی کناروں کے درمیان میں D کے پڑوسی ہیں۔ D اور A نہ تو بالترتیب ایک دوسرے کے اور نہ ہی Hاور B فوری پڑوسی نہیں ہے۔ ایک دوسرے کے مخالف بیٹھے ہوئے ہیں لیکن G اور E کے درمیان کم سے کم دو لوگ بیٹھے ہونے چاہیے۔ D اور A نہیں بیٹھا ہے اور کے مخالف نہیں بیٹھ سکتا ہے۔ F، C ایک دوسرے کا سامنا نہیں کر رہے ہیں۔
F کے تعلق سے B کی پوزیشن کیا ہے؟

A.डावीकडे तिसरा
A.Third to the left
A.بائیں سے تیسری

B.उजवीकडून तिसरा
B.Third to the right
B.دائیں سے تیسری

C.डावीकडून चौथा
C.Fourth to the left
C.بائیں سے چوتھی

D.उजवीकडून दुसरा
D.Second to the right
D.دائیں سے دوسری

Answer: C.डावीकडून चौथा
C.Fourth to the left
C.بائیں سے چوتھی

111	खालीलपैकी स्त्रीलिंगी शब्द ओळखा.
	A.रस्ता
	B.मार्ग
	C.वाट
	D.पथ
Answer:	C.वाट

112	प्रश्न चिन्हाच्या (?) जागी योग्य ठरणारी आकृती अंकांनी दर्शविलेल्या चार आकृतींमधून शोधून काढा. Choose an appropriate figure from the four numbered figures for the place of the questions mark (?). نشان لگی چارشکلوں میں سے، مناسب شکل کا انتخاب کرے اسے سوالی نشان کی جگہ رکھنے کے لئے 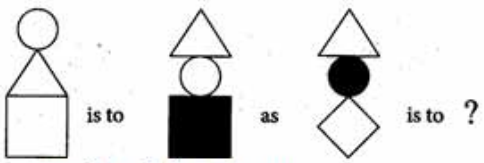 उत्तरासाठी पर्यायी आकृत्या **Answer Figure** جوابی شکل 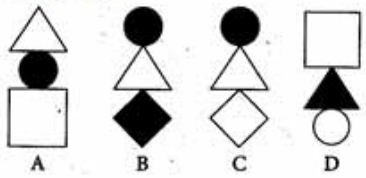
	A. (A)
	B. (B)
	C. (C)
	D. (D)
Answer:	B. (B)

113	DIRECTIONS: A sentence with an underlined word is given below. Find the Word which is most similar in meaning to the underlined word. The book has succeeded in making philosophy accessible to a wider audience.
	A.Approachable

B.Scaring

C.Avoidable

D.Tough

Answer: A.Approachable

114 रंग अंधत्व दोष हे लेन्स वापरून दुरुस्त करता येते —

Colour blindness defect can be corrected by using the lens—

رنگ کوری نقص کو لینس کا استعمال کرتے ہوئے درست کیا جاسکتا ہے---

A.अंतरावरची लेन्स
A.Concave Lens
A.کونکیو لینس

B.बहिर्गत लेन्स
B.Convex Lens
B.کونویکس لینس

C.दंडगोल लेन्स
C.Cylindrical lens
C. اسطوانہ نما لینس

D.यापैकी एकही नाही
D.None of these
D.ان میں سے کوئی بھی نہیں

Answer: D.यापैकी एकही नाही
D.None of these
D.ان میں سے کوئی بھی نہیں

115 वनस्पतीचा कोणता भाग मातीचे अपक्षरण रोकण्यास मदत करतो?

Which part of plant helps in prevention of soil erosion?

پودے کا کونسا حصہ مٹی کے کٹاؤ کو روکنے میں مدد کرتا ہے

A.देठ
A.Stem
A.تنا

B.पान
B.Leaf
B.پتے

C.फांदी
C.Branch
C.شاخ

D.मुळं
D.Roots
D.جڑیں

Answer: D.मुळं
D.Roots
D.جڑیں

116 डेटा कायमस्वरूपी कुठे साठवला जातो?

Where is data saved permanently?

ڈیٹا مستقل طور پرکہاں محفوظ کیا جاتا ہے؟

A.मेमरी
A.Memory
A.میموری

B.स्टोरेज
B.Storage
B.اسٹوریج

C.सिपियू
C.CPU
C.سی پی یو

D.प्रिंटर
D.Printer
D.پرنٹر

Answer: B.स्टोरेज
B.Storage
B.اسٹوریج

117	रडारचा वापर — RADAR is used to — راڈار کا استعمال کیا جاتا ہے بواسطے---
	A.पाण्यात बुडलेली पाणबुडी शोधण्यासाठी A.To locate submerged submarines A.ڈوبی ہوئی پن ڈبیوں کا پتا لگانے کے لئے
	B.रेडिओ रिसीव्हरकडून सिग्नल प्राप्त करण्यासाठी B.Receive signal from radio receivers B.ریڈیو رسیور سے سگنل موصول کرنے کے لئے
	C.दूरस्थ वस्तूचा सुगावा लावण्यासाठी आणि शोधून काढण्यासाठी C.Detect and locate distant objects C.دورکی چیزوں کا سراغ لگانےاورجائے وقوع معلوم کرنےکےلئے
	D.भूस्थानिक उपग्रह शोधण्यासाठी D.Locate geostationary satellites D.جیوسٹیشنری آربٹ سٹیلائیٹ کا جائے وقوع معلوم کرنےکےلئے
Answer:	C.दूरस्थ वस्तूचा सुगावा लावण्यासाठी आणि शोधून काढण्यासाठी C.Detect and locate distant objects C.دورکی چیزوں کا سراغ لگانےاورجائے وقوع معلوم کرنےکےلئے

118 सूचना: प्रत्येक प्रश्नाला एक प्रमुख विधानासोबत चार विधाने आहेत ज्यांच्याखाली A, B, C, आणि D असे चार विधान आहेत. क्रमवार विधानांची जोडी निवडा ज्यामध्ये प्रथम विधान दुसऱ्या विधानाला सुचवते, आणि दोन्ही विधाने तर्किकदृष्ट्या प्रमुख विधानासोबत निगडित असेल.

तेव्हा सरकार कर लावते, तेंव्हा सुविधाही देते
A. सरकारने कर लावले
B. सरकारने कर लावले नाही
C. शासनाने सुविधा दिल्या
D. शासनाने सुविधा दिल्या नाही

DIRECTIONS: Each question has a main statement followed by four statements labelled A, B, C and D. Choose the ordered pair of statements, where the first statement implies the second, and the two statements are logically consistent with the main statement.

When government taxes , it also facilitates
A. Government taxed
B. Government did not tax
C. Government facilitated
D. Government did not facilitate

ہدایت: ہر سوال میں ایک جملہ ہے جسکے بعد چار جملےاے، بی،سی اور ڈی کے نام سے دئے گئے ہیں اسمیں منسلک جوڑیوں کو چنئے۔ جہاں پہلا جملہ دوسرے جملہ کی اور اشارہ کر رہا ہے اور دو جملے منطقی مرکزی بیان کے مطابق ہیں

حکومت ٹیکس لگاتی ہے تو سہولت بھی دیتی ہے
Aحکومت نے ٹیکس لگایا ۔
Bحکومت نے ٹیکس نہیں لگایا ۔
Cحکومت نے سہولت دی ۔
Dحکومت نے سہولت نہیں دی ۔

A.AC
A.AC
A.AC

B.BA
B.BA
B.BA

C.DA
C.DA
C.DA

D.CD
D.CD
D.CD

Answer: A.AC
A.AC
A.AC

119 मुलाच्या शैक्षणिक वयाचा अर्थ म्हणजे

The meaning of Educational Age of the child is—

بچے کی تعلیمی عمر کا مطلب ہے-

A.शाळेत प्रवेश मिळण्यासाठी जरूरी असलेले कमीतकमी वय
A.The minimum age to get admission in a school
A.اسکول میں داخلہ لینے کے لئے کم از کم عمر

B.स्पर्धेमध्ये भाग घेण्यासाठी जरूरी असलेले कमीतकमी वय
B.The minimum age required for appearing in competition
B.مقابلہ میں حاضر ہونے کے لئے کم از کم ضروری عمر

C.विविध विषयांमध्ये विद्यार्थ्यांनी सर्वसाधारणपणे दर्शवलेल्या यशाचे सरासरी मूल्य
C.The average value of general achievement demonstrated by the students in different subjects
C.عام کامیابی کی اوسط قیمت،جو مختلف مضامین میں طالب علموں کی طرف سے ظاہر کی گئی

D.वरील सर्व
D.All the above
D.مذکورہ تمام

Answer: C.विविध विषयांमध्ये विद्यार्थ्यांनी सर्वसाधारणपणे दर्शवलेल्या यशाचे सरासरी मूल्य
C.The average value of general achievement demonstrated by the students in different subjects
C.عام کامیابی کی اوسط قیمت،جو مختلف مضامین میں طالب علموں کی طرف سے ظاہر کی گئی

120 $(27)^{2015}$ चा एकक स्थानचा अंक

Unit digit of $(27)^{2015}$ is

$(27)^{2015}$ کا یونٹ ہندسہ ہے؟

A.7
A.7
A.7

B.9
B.9
B.9

C.3
C.3
C.3

D.1
D.1
D.1

Answer:	C.3 C.3 C.3

121	Out of the given options, choose the one which is the correct indirect speech of the sentence given below. She said to him, “Please wait here till I return.”
	A.She requested him to wait here till she returns.
	B.She requested him to be waiting here till she returns.
	C.She requested him to have been waiting here till she is returning.
	D.She requested him to wait there till she returned.
Answer:	D.She requested him to wait there till she returned.

122	खालीलपैकी शुद्ध वाक्य कोणते ?
	A.त्याने निरोप धाडला.
	B.त्याने निरोप पाठवला.
	C.त्याने निरोप ठेवला.
	D.वरील सर्व.
Answer:	D.वरील सर्व.

123 सूचना: दोन विधाने आणि त्यानंतर चार निष्कर्ष, I, II, III आणि IV दिले आहेत. ही विधाने सामान्यतः ज्ञात वस्तुस्थितीपेक्षा भिन्न असली तरी सत्य आहेत असे समजा. दिलेल्यापैकी कोणता निष्कर्ष दिलेल्या विधानांवरुन नक्की काढता येऊ शकतो हे तुम्ही ठरवायचे आहे.तुमचे उत्तर सूचित करा.
विधाने:
सर्व पुरुष स्त्रिया आहेत.
सर्व स्त्रिया वेड्या आहेत.
निष्कर्ष:
I. सर्व पुरुष वेडे आहेत.
II. सर्व वेडे हे पुरुष आहेत.
III. काही वेड्यांपैकी स्त्रिया आहेत.
IV. काही वेड्यांपैकी पुरुष आहेत.

DIRECTION: Two statements are given following by four conclusions, I, II, III and IV. You have to consider that statements to be true, even if they seem to be at variance from commonly known facts. You are to decide which of the given conclusions can definitely be drawn from the given statements. Indicate your answer.

Statements:
All men are women.
All women are crazy.

Conclusion:
I. All men are crazy.
II. All the crazy are men.
III. Some of the crazy are women.
IV. Some of the crazy are men.

ہدایات: دو سٹیٹمنٹ جوکہ چار خلاصوں پر مشتمل ہیں .I،II، III اور IV. اپ کو وہ سٹیٹمنٹ درست ماننا ہے، اگرچہ دکہنے میں وہ بہت سارے حقاٰق ست مطبقت رکہتی ہو۔ اپ کو دیے گے خلاصوں میں سے یقینی طور پر اسے اختیار کرنا ہے جو سٹیٹمنٹ سے نکلا ہو. اپنا جواب تلاش کرے

اظہار بیان:
تمام مرد عورتیں ہیں
تمام عورتیں کمزور ہیں

نتائج:
I تمام مرد کمزور ہیں.
II تمام کمزور مرد ہیں.
III کمزوروں میں سے کچہ عورتیں ہیں ۔
IV کمزوروں میں سے کچہ مرد ہیں.

A.एकही निष्कर्ष निघणार नाही
A.None of the conclusions follows
A.کوی بہی خلاصہ درست نہیں ہے

B.सर्व निष्कर्ष निघतील
B.All the conclusions follow
B.تمام خلاصیں درست ہیں

C.केवळ I, III आणि IV निष्कर्ष निघेल
C.Only I, III and IV follow
C.صرف III، I اور IV درست ہے

D.केवळ II आणि III निष्कर्ष निघेल
D.Only II and III follow
D.صرف II اور III درست ہے

Answer: C.केवळ I, III आणि IV निष्कर्ष निघेल
C.Only I, III and IV follow
C.صرف III، I اور IV درست ہے

124 DIRECTIONS: A sentence with an underlined phrasal verb is given below. Out of the four options, choose the one which can be substituted for the given phrasal Verb.
The discovery of Penicillin was a major breakthrough in the field of medicine

A.an insignificant discovery

B.a big achievement

C.a useless discovery

D.suspension

Answer: B.a big achievement

125 भारतामधील अंतिम मुघल शासक कोण होता –

The last Mughal ruler of India was –

ہندوستان کا آخری مغل حکمراں _____ تھا

A.औरंगजेब
A.Aurangzeb
A.اورنگ زیب

B.बहादूर शाह
B.Bahadur Shah
B.بہادر شاہ

C.अकबर शाह II
C.Akbar Shah II
C.اکبر شاہ II

D.यांपैकी कोणतेही नाही
D.None of these
D.ان میں سے کوئی نہیں

Answer:

D.यांपैकी कोणतेही नाही
D.None of these
D.ان میں سے کوئی نہیں

126

सूचना: दिलेल्या पर्यायांमधून वेगळे ते बाहेर काढा.

DIRECTIONS: Find the odd one out from the given alternatives.

سمت: دیے گئے متبادل میں سے بے جوڑ کو تلاش کرو۔

A.36
A.36
A.36

B.49
B.49
B.49

C.64
C.64
C.64

D.81
D.81
D.81

Answer:

B.49
B.49
B.49

127

सूचना: खालील प्रश्नात उत्तरातील पर्यायांपैकी कोणत्या पर्यायी आकृतीत प्रश्नातील आकृती अंतर्भूत आहे?

DIRECTIONS: In the given question find the answer figure in which question figure is embedded.

ہدایات: دیئے گئے سوال میں جواب والی شکل دریافت کیجیئے جس میں سوال والی شکل سرایت کرگئی ہے۔

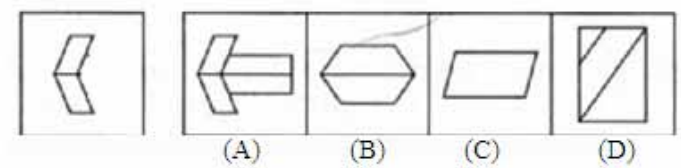

A. (A)

B. (B)

C. (C)

D. (D)

Answer: A. (A)

128 _____ हे प्रशिक्षणानंतर विशिष्ट ज्ञान किंवा कुशलतेला ग्रहण करण्याच्या वैयक्तिक क्षमतेला दर्शवते

_____ indicates individual's capacity to acquire some specific knowledge or skill after training.

_____ ظاہر کرتا ہے کسی فرد کی ٹریننگ کے بعد کچھ خاص علم یا صلاحیت حاصل کرنے کی قابلیت کو۔

A.दृष्टिकोन
A.Aptitudes
A.(لیاقت (ایپٹی ٹیوڈ

B.आवड
B.Interests
B. میلانات

C.मनोवृत्ती
C.Attitudes
C.رویے

D.सृजनशिलता
D.Creativity
D. تخلیق

Answer: A.दृष्टिकोन
A.Aptitudes
A.(لیاقت (ایپٹی ٹیوڈ

129 सूचना: खालील आकृती भौतिकशास्त्र, रसायनशास्त्र आणि गणित शिकणारे विद्यार्थी दर्शवते

DIRECTIONS: The diagram below represents the students who study Physics, Chemistry and Mathematics.

ہدایات: ذیل میں ڈایاگرام ان طالب علموں کی نمائندگی کرتی ہے جو فزکس، کیمسٹری اور ریاضی کا مطالعہ کرتے ہیں۔

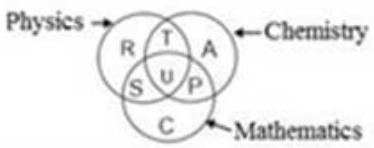

या आकृतीचा अभ्यास करा आणि भौतिकशास्त्र आणि रसायनशास्त्र दोन्ही शिकणारे परंतु गणित न शिकणारे विद्यार्थी दाखवणारा भाग ओळखा.

Study the diagram and identify the region which represents students who study both Physics and Chemistry but not Mathematics.

ڈایاگرام کا مطالعہ کریں اور اس علاقے کی شناخت کریں جو ان طالب علموں کی نمائندگی کرتا ہے جو فزکس اور کیمسٹری دونوں کا مطالعہ کرتے ہیں لیکن ریاضی کا نہیں۔

A. U

B. C

C. R

D. T

Answer: D. T

130 ‘ मला पाच टोप्या दे.’ या वाक्यातील विशेषण ओळखा.

A.मला

B.पाच

C.टोप्या

D.A) दे

Answer: B.पाच

131 समीर पूर्वेला तोंड करुन उभा होता. तो उजवीकडे वळला आणि 5 मी. चालला, मग पुन्हा उजवीकडे वळून 7 मी. चालला. मग तो त्याच्या डाव्या बाजूला वळला आणि 4 मीटर चालला. तर आता त्याचे तोंड कुठल्या दिशेला आहे?

Samir was standing facing east. He turned to his right and walked 5 m, again turned to his right and walked 7 m. Then he turned to his left and walked 4 m. In which direction is he facing now?

سمیر مشرق کا رخ کرکے کھڑا تھا۔ وہ اپنے دائیں طرف مڑا اور 5 میٹر چلا، دوبارہ اپنے دائیں طرف مڑا اور 7 میٹر چلا۔ پھر وہ اپنے بائیں طرف مڑا اور 4 میٹر چلا۔ اب وہ کس سمت کا رخ کیے ہوئے ہے؟

A.उत्तर
A.North
A.شمال

B.दक्षिण
B.South
B.جنوب

C.पश्चिम
C.West
C.مغرب

D.पूर्व
D.East
D.مشرق

Answer: B.दक्षिण
B.South
B.جنوب

132 जर रस्त्याला फूटपाथ म्हटले, फूटपाथला उद्यान म्हटले, उद्यानाला मार्ग म्हटले, आणि मार्गाला इमारत म्हटले, तर एखादे मूल कुठे खेळू शकेल?

If road is called footpath, footpath is called garden, garden is called street and street is called building, where a child can play?

اگر راستے کو فوٹ پاتھ، فوٹ پاتھ کو باغیچہ، باغیچے کو گلی، گلی کو عمارت کہا جائے، تو ایک بچہ کہاں کھیل سکتا ہے؟

A.मार्ग
A.Street
A.گلی میں

B.उद्यान
B.Garden
B.باغیچہ میں

C.रस्ता
C.Road
C.راستے میں

D.फूटपाथ
D.Footpath
D.فوٹ پاتھ پر

Answer: A.मार्ग
A.Street
A.گلی میں

133 जर तुम्हाला फक्त हे माहीत आहे की मुलाचे मानसिक वय 10 आहे, तर खालीलपैकी कोणते वाक्य तुम्ही त्याच्याबद्दल सर्वात जास्त खात्रीने बोलू शकता?

If you only know that a child has a mental age of 10, which of the following statements can you make about him with most assurance?

اگر آپ صرف یہ جانتے ہیں کہ ایک بچے کی ذہنی عمر 10 ہے، درج ذیل بیانات میں سے کون سا آپ اس کے بارے میں زیادہ یقین دہانی کر سکتے ہیں؟

A.तो कमजोर मनाचा आहे
A.He is feeble-minded
A.وہ کمزور ذہن کا ہے

B.तो 10 वर्षे वयाचा आहे
B.He is 10 years old
B.وہ 10 سال کی عمر کا ہے

C.तो सामान्य 10 वर्षे वयाच्या पातळीच्या बुद्धीमत्तेने कार्यप्रदर्शन करतो
C.He performs intellectually at the level of the typical 10 years old
C.وہ عام طور پر 10 سال کی عمر کی سطح پر ذہانت کی کارکردگی دکھاتا ہے

D.तो त्याच्या मानसिक वाढीमध्ये थोडाफार मंदगती आहे
D.He is somewhat retarded in his mental growth
D.وہ اپنی ذہنی ترقی میں کسی حد تک ہٹا ہوا ہے

Answer: C.तो सामान्य 10 वर्षे वयाच्या पातळीच्या बुद्धीमत्तेने कार्यप्रदर्शन करतो
C.He performs intellectually at the level of the typical 10 years old
C.وہ عام طور پر 10 سال کی عمر کی سطح پر ذہانت کی کارکردگی دکھاتا ہے

134 2636 – 1742 + 8346 + 73 – 514 =?

2636 – 1742 + 8346 + 73 – 514 =?

2636 – 1742 + 8346 + 73 – 514 =?

A.3259
A.3259
A.3259

B.8745
B.8745
B.8745

C.2135
C.2135
C.2135

D.8799
D.8799
D.8799

Answer: D.8799
D.8799
D.8799

135 ‘हॅबिअस कॉर्पस’, ‘सेंटोरिअरी’ या कशामध्ये वापरल्या जाणाऱ्या संकल्पना आहेत –

‘Habeas Corpus’, ‘Certiorari’ are terms used in –

ہبیس کارپس’، 'سیرٹیوریری' اصطلاحات کا استعمال _____ میں ہوتا ہے'

A.कंप्यूटर प्रोग्रामिंग
A.Computer Programming
A.کمپیوٹر پروگرامنگ

B.अवकाश तंत्रज्ञान
B.Space Technology
B.اسپیس ٹکنالوجی

C.कायदा
C.Law
C.قانون

D.आईस-हॉकी
D.Ice-Hockey
D.آئس ہاکی

Answer: C.कायदा
C.Law
C.قانون

136 युआयडीएआय ही एजेंसी आपण कशाविषयी बोलताना नमूद करतो –

UIDAI is the agency we mention while talking about –

ایک ایجنسی ہے جس کا تذکرہ ہم_____کے تعلق سے بات کرتے وقت کرتے ہیں(UIDAI) یو آئی ڈی اے آئی

A.पॅन कार्ड
A.Pan Card
A.پین کارڈ

B.मतदान ओळख पत्र
B.Voter ID
B.ووٹر آئی ڈی

C.चालन परवाना
C.Driving Licence
C.ڈرائیونگ لائسنس

D.आधार कार्ड
D.Aadhaar Card
D.آدھار کارڈ

Answer: D.आधार कार्ड
D.Aadhaar Card
D.آدھار کارڈ

137 A sentence with an underlined idiomatic expression is given. What is the meaning of the idiomatic expression ‘Blue- eyed boy’ in the sentence given below?
It was no surprise that Franklin got the promotion. Everyone knows he's the boss's blue -eyed boy.

A.A man who is liked and admired by somebody in authority

B.A man who is both criticized and abused by everybody

C.Someone whom everybody hates

D.None of the above

Answer: A.A man who is liked and admired by somebody in authority

138 सूचना: खालील माहितीचा काळजीपूर्वक अभ्यास करा आणि दिलेल्या प्रश्नांची उत्तरे द्या.
आठ मित्र - A, B, C, D, E, F, G आणि H — हे अशा चौरसकार टेबलाभोवती बसले आहेत की त्यापैकी चार जण टेबलच्या चार कोप-यांवर बसले आहेत तर इतर चार त्या चार बाजूंच्या मध्यभागी बसले आहेत. ते जे चार बाजूंच्या मध्यभागी बसून आहेत ते मध्याभागाकडे बघत आहेत तर जे लोक चार कोपऱ्यांवर बसले आहेत ते बाहेर बघत आहेत.
A हा C च्या डाव्या बाजूला तिसरा आहे, जो कोणत्याही कोपऱ्यांवर नाही बसला आहे. E हा F च्या डाव्या बाजूला तिसरा आहे, जो C चा तत्काळ शेजारी नाही. B आणि H हे एकमेकांचे तत्काळ शेजारी हि नाहीत किंवा क्रमशः A आणि D चे हि तत्काळ शेजारी नाहीत. D कुठल्याही बाजूच्या मध्यभागी बसलेला नाही आणि कमीतकमी दोन व्यक्ती A आणि D च्या मध्ये बसलेले पाहिजेत. E आणि G एकमेकांसमोर बसलेले आहेत परंतु एकमेकांना तोंड देत नाहीत. F हा C च्या विरुद्ध बसू शकत नाही.
जर A कडून सुरवात करत सर्वांच्या व्यवस्थेत घड्याळाच्या दिशेने क्रमवारीत फेरबदल केले, तर (A व्यतिरिक्त) खालील पैकी कोण मूळ स्थिती कायम राहील?

DIRECTIONS: Study the following information carefully and answer the given questions.
Eight friends – A, B, C, D, E, F, G and H— are sitting around a square table in such a way that four of them sit at four corners of the table while the other four sit in the middle of the four sides. Those who sit in the middle of the four sides face the centre while those who sit at the four corners face outside.
A sits third to the left of C, who does not sit at any of the corners. E sits third to the left of F, who is not an immediate neighbour of C. B and H are neither immediate neighbours of each other nor of A and D respectively. D does not sit in the middle of any sides and at least two person should sit between A and D. E and G sit opposite to each other but do not face each other. F cannot sit opposite C.
If they all are rearranged clockwise in alphabetical order starting from A, which of the following(excluding A) would retain his original position?

ہدایات: مندرجہ ذیل معلومات کو دھیان سے پڑھیں اور دیے گئے سوالوں کے جواب دیں۔
ایک مربع میز کے ارد گرد بیٹھے ہوئے ہیں اس طرح سے کہ ان میں سے چار میز کے – H اور G، F، E، D، C، B، A - آٹھ دوست چاروں کونوں پر بیٹھا ہے جبکہ باقی چار چاروں کناروں کے درمیان میں بیٹھے ہیں۔ جو لوگ چاروں کونوں کے درمیان میں بیٹھے ہیں ان کا رخ مرکز کی طرف جبکہ چاروں کناروں پر بیٹھے لوگوں کا رخ باہر کی طرف ہے۔
A، C کے بائیں سے تیسرے پر بیٹھا ہے، جو E، F کے بائیں طرف سے تیسرے پر بیٹھا ہے، جو کسی بھی کونے پر نہیں بیٹھا ہے۔ کسی بھی کناروں کے درمیان میں D کے پڑوسی ہیں۔ D اور A نہ تو بالترتیب ایک دوسرے کے اور نہ ہی Hاور B فوری پڑوسی نہیں ہے۔ ایک دوسرے کے مخالف بیٹھے ہوئے ہیں لیکن G اور E کے درمیان کم سے کم دو لوگ بیٹھے ہونے چاہیے۔ D اور A نہیں بیٹھا ہے اور کے مخالف نہیں بیٹھ سکتا ہے۔ F، C ایک دوسرے کا سامنا نہیں کر رہے ہیں۔
اگر A کو) سے شروع کرتے ہوئے ان سب کو گھڑی وار حروف تہجی کی ترتیب میں دوبارہ رکھا جائے، تو مندرجہ ذیل میں سے کون A چھوڑ کر) اصل پوزیشن برقرار رکھے گا؟

A.H
A.H
A.H

B.G
B.G
B.G

C.D
C.D
C.D

D.E
D.E
D.E

Answer: B.G
B.G
B.G

139 खालीलपैकी कोणते त्रिमिती अवकाशाचे उदाहरण नाही?

Which of the following is not the example of three dimensional space?

نیچے دی گئے اختیارات میں سے کونسی 3 جہتی خلہ کی مثال نہیں ہے؟

A. सम-भुज चौकोन (ऱ्होम्बस)

A. Rhombus

A. رومبو

B. काड्यापेटी

B. Match Box

B. ماچس باک

C. फासा

C. Dice

C. پاسہ

D. चेंडू

D. Ball

D. گیند

Answer: A. सम-भुज चौकोन (ऱ्होम्बस)

A. Rhombus

A. رومبو

140 निर्देश: खालील प्रश्न दिलेल्या शब्दांवर आधारित आहेत.

Upper/ Minority/ Sentinel/ Sponsor

जर दिलेल्या शब्दातील प्रत्येक अक्षरे इंग्रजी वर्णमालेतील पुढल्या अक्षराने बदलली तर मग किती शब्दान मध्ये नेमके दोन स्वर असतील?

DIRECTIONS: Following question is based on the given words.

Upper/ Minority/ Sentinel/ Sponsor

If each of the letters in the given words is replaced by its next letter in the English alphabet then how many words having exactly two vowels?

ہدایت جیل کے سوال دے ہے لفجونپر مشتمل ہیں

Upper/ Minority/ Sentinel/ Sponsor

اگر ہر لفج کا ہر حرف اگلے حرف تہجیبی سے تبدیل کیا جائے تو صرف دو واول والے کتنے لفج رہ جاتیں ہیں

A.एक
A.One
A.ایک

B.दोन
B.Two
B.دو

C.तीन
C.Three
C.تین

D.चार
D.Four
D.چار

Answer: A.एक
A.One
A.ایک

141 A आणि B एक काम 8 दिवसांमध्ये पूर्ण करतात, B आणि C तेच काम 6 दिवसांत, तर C आणि A एकत्र ते काम 10 दिवसांत करतात. जर त्या सर्वांनी एकत्र काम केले, तर ते काम किती दिवसांत पूर्ण होईल?

A and B together can do a work in 8 days, B and C together in 6 days, while C and A together in 10 days. If they all work together, the work will be completed in how many days?

A اور B مِل کر 10 دنوں میں۔ اگر A اور C مل کر وہ کام 6 دنوں میں کرتے ہیں۔ جبکہ B اور C ،مل کر ایک کام 8 دنوں میں کرتے ہیں یہ سارے A B اور C مل کر کام کریں تو ، یہ کام کتنے دنوں میں ختم ہو جائے گا؟

(A) $3\frac{3}{4}$ days / दिवस /دن

(B) $3\frac{3}{7}$ days / दिवस /دن

(C) $5\frac{5}{47}$ days / दिवस /دن

(D) $4\frac{4}{9}$ days / दिवस /دن

Answer: (C) $5\frac{5}{47}$ days / दिवस /دن

142 A ही B ची बहीण आहे. C ही B ची आई आहे. D हा C चा वडील आहे. E ही D ची आई आहे. मग A चे D सोबत नाते काय आहे?

A is B's sister. C is B's mother. D is C's father. E is D's mother. Then how is A related to D ?

B A کی بہن ہے. B C کی ماں ہے. C D کا باپ ہے. D E کی ماں ہے. تو A کا D سے کیا رشتہ ہے؟

A.आजी
A.Grandmother
A.دادی

B.आजोबा
B.Grandfather
B.دادا

C.मुलगी
C.Daughter
C.بیٹی

D.नात
D.Granddaughter
D.پوتی

Answer: D.नात
D.Granddaughter
D.پوتی

143 निर्देश: मालिका पूर्ण करा

I, K, N, ?, S, U

DIRECTION: Complete the series

I, K, N, ?, S, U

ہدایت اس سرج کو مکمّل کرو

I, K, N, ?, S, U

A.K
A.K
A.K

B.P
B.P
B.P

C.S
C.S
C.S

D.N
D.N
D.N

Answer: B.P
B.P
B.P

144 अध्ययन हे निर्माण करू शकत नाही

Learning cannot produce

تعلیم پیدا نہیں کر سکتی

A.कुशल व्यक्ति
A.Skilled individual
A.انفرادی مہارت

B.ज्ञानी व्यक्ती
B.Knowledgeable individual
B.علمی شخصیت

C.प्रौढ व्यक्ति
C.Matured individual
C.پختہ کار شخص

D.उत्तम शारीरिक बांधा
D.Good physical structure
D.اچھی جسمانی ساخت والا

Answer: C.प्रौढ व्यक्ति
C.Matured individual
C.پختہ کار شخص

145 मालिका 2, 7, 12, 17…… मधील कितव्या अनुक्रमाचे पद 32 आहे?

Which term of the series 2, 7, 12, 17…… is 32?

2, 7, 12, 17……32 اس سرج کی کونسی ٹرم ہے?

A.6वे
A.6th
A.6واں

B.5वे
B.5th
B.5واں

C.7वे
C.7th
C.7واں

D.9वे
D.9th
D.9واں

Answer: C.7वे
C.7th
C.7واں

146 ‘ देवालय ’ या शब्दाची संधी सोडवा.

A.देव + लय

B.देवा + लय

C.देव + आलंय

D.देव + आलय

Answer: D.देव + आलय

147 आधुनिक शिक्षक अधिकाधिक ही कल्पना स्वीकारत आहेत की कौशल्य शिकण्याचा काळ म्हणजे

Modern educators are accepting more and more the notion that the time to learn a skill is—

جدید معلمین زیادہ سے زیادہ اس تصور کو قبول کر رہے ہیں کہ ایک مہارت سیکھنے کا وقت --- ہے-

A.प्रारंभिक वर्षांमध्ये जेव्हा मेंदू लवचिक असतो
A.In the early years when the mind is pliable
A.ابتدائی سالوں میں جب دماغ لچکدار ہے

B.जेव्हा आवश्यक ती तयारी प्राप्त झाली असेल
B.When the required readiness is attained
B.جب ضروری تیاری حاصل کی جاتی ہے

C.जेव्हा तसे एखाद्या व्यक्तीसाठी गरजेचे आहे
C.When it is needed by the individual
C.جب فرد کی جانب سے ضرورت ہوتی ہے

D.जेव्हा इतर मुले ते शिकत असतात
D.When other children are learning it
D.جب دوسرے بچے اسے سیکھ رہے ہیں

Answer: C.जेव्हा तसे एखाद्या व्यक्तीसाठी गरजेचे आहे
C.When it is needed by the individual
C.جب فرد کی جانب سے ضرورت ہوتی ہے

148 720 मिलीचा 2 लिशी गुणोत्तर शोधा

Find the ratio of 720 ml to 2 liters?

720 ملی لیٹر کے مقابلہ میں 2 لیٹر کا تناسب معلوم کریں؟

A.9:5
A.9:5
A.9:5

	B.80:1 B.80:1 B.80:1
	C.9:25 C.9:25 C.9:25
	D.80:25 D.80:25 D.80:25
Answer:	C.9:25 C.9:25 C.9:25

149	DIRECTIONS: A sentence with an underlined word is given below. Find the word which is opposite in meaning to the underlined word from the given options. The government has affirmed its commitment to equal rights.
	A.Denied
	B.Asserted
	C.Promised
	D.Assured
Answer:	A.Denied

150	निर्देश: खालीदिलेल्या अक्षराच्या क्रमात काही अक्षरे गहाळ केली आहेत ते त्या क्रमाने खाली दिलेल्या पर्यायांपैकी एक आहे a _ _ ab _ a _ aba DIRECTIONS: In each of the following letter series, same of the letters are missing which are given in that order as one of the alternatives below it. a _ _ ab _ a _ aba دایت جیل کے حرف سرج میں کوئی حرف گمشدہ ہے آپکو انکی شناخت جیل کے اختیارات سے کرنی ہے a _ _ ab _ a _ aba

A.aaaa
A.aaaa
A.aaaa

B.aaab
B.aaab
B.aaab

C.aabb
C.aabb
C.aabb

D.abbb
D.abbb
D.abbb

Answer: A.aaaa
A.aaaa
A.aaaa

151 **एका घनाकृतीच्या तीन अवस्था दाखविल्या आहेत. त्यांवर अवलंबून हे शोधून काढा की दिलेल्या घनाकृतीमध्ये 1 या अंकाच्या विरुद्ध बाजूला कोणता अंक असेल?**

Three positions of a cube are given. Based on them, find out, which number is found opposite number 1 in a given cube?

ہدایات: ایک کیوب کی تین حالتیں دی گئی ہیں۔ ان کی بنیاد پر، دریافت کیجیئے، کونسا نمبرکیوب میں دیئے گئے 1 نمبر کی اپوسٹ ہے ؟



A. 3

B. 5

C. 4

D. 6

Answer: C. 4

152 भारतीय राष्ट्रपतीला कार्यकारी समजले जाऊ शकते:

The Indian President may be regarded to be a/an executive:

بھارتی صدر بحیثیت ایگزیکٹو ہیں

A.खरा
A.Real
A.حقیقی

B.निरपेक्ष
B.Absolute
B. مطلق

C.धारक
C.Titular
C.صرف نام کا

D.सजावटीचा
D.Decorative
D. آرائشی.

Answer: C.धारक
C.Titular
C.صرف نام کا

153 संगणकातील संक्षेप केबीचा सामन्यपणे अर्थ आहे …….

The computer abbreviation KB usually means …….

کمپیوٹر کے محاورہ میں کے بی کا عام طور پر کیا مطلب ہوتا ہے---------

A.की ब्लॉक
A.Key Block
A.کی بلاک

B.केरनेल बुट
B.Kernel Boot
B.کرنل بوٹ

C.किलो बाईट
C.Kilo Byte
C.کیلو بائٹ

D.किट बिट
D.Kit Bit
D.کِٹ بائٹ

Answer: C.किलो बाईट
C.Kilo Byte
C.کیلو بائٹ

154 **सूचना**: आकृती(X)मध्ये दिलेल्या आकारांचा वापर करून (A), (B), (C), (D) या आकारांमधील कोणता आकार तयार करता येईल?

DIRECTIONS: Find out which of the figure (A), (B), (C), (D) can be formed from the pieces given in fig. (X).

ہدایات: (x) شکل میں جو ٹکڑے دیئے گئے ہیں ان سے (A), (B), (C), (D) ان میں سے کونسی شکلیں بن سکتی ہیں دریافت کریں۔

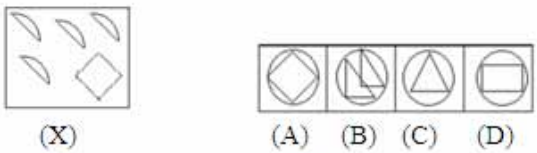

A. (A)

B. (B)

C. (C)

D. (D)

Answer: A. (A)

155 सूचना: या प्रश्नांमध्ये पर्याय A आणि B यांच्या सहित दोन विधाने दिलेली आहेत. जरी सामान्यपणे माहीत असलेल्या तथ्यांबरोबर जुळत नसले तरी खालील विधाने बरोबर आहेत असे समजून तुमचे योग्य उत्तर लिहा:
सर्व आई काकू आहेत.
सर्व काकू महिला आहेत.
A: सर्व आई महिला आहेत.
B: सर्व काकू आई आहेत.

DIRECTION: In these questions, two statements are given, followed by two inferences A and B. Assume the statements to be true even if they are at variance with the known facts and then mark your answer as:

All mothers are aunts.
All aunts are ladies.
A: All mothers are ladies.
B: All aunts are mothers.

ہدایت:ان سوالات میں، دو بیانات دیے گئے ہیں، جن کے بعد دو تجاویز A اور B کو تسلیم کریں دیے گئے ہیں۔ بیانات کے درست ہونے اگرچہ وہ عام طور پر معلوم حقائق کے برعکس ہوں اور پھر اس کے مطابق اپنا جواب نشان زد کریں:

سبھی مائیں چچیاں ہیں۔
کچھ چچیاں عورتیں ہیں۔

A: تمام مائیں عورتیں ہیں۔
B: سبھی چچیاں مائیں ہیں۔

A.जर केवळ पर्याय (A) असल्यास.
A.If only inference (A) follows.
A.صرف تجویز (A) پیروی کرتا ہے۔

B.जर केवळ पर्याय (B) असल्यास.
B.If only inference (B) follows.
B.صرف تجویز (B) پیروی کرتا ہے۔

C.जर दोन्ही पर्याय (A) आणि (B) असल्यास.
C.If both (A) and (B) follow.
C.(A) اور (B) دونوں پیروی کرتے ہیں۔

D.जर दोन्ही पर्याय (A) आणि (B) नसल्यास.
D.If neither (A) nor (B) follows.
D.نہ تو (A) نہ ہی (B) پیروی کرتے ہیں۔

Answer: A.जर केवळ पर्याय (A) असल्यास.
A.If only inference (A) follows.
A.صرف تجویز (A) پیروی کرتا ہے۔

156 ‘ माजी ’ या शब्दाचा विरुद्धार्थी शब्द कोणता ?

A.आजी

B.दाजी

C.बाजी

D.काजी

Answer: A.आजी

157 सूचना: अर्थपूर्ण परिच्छेद निर्माण करण्यासाठी, खाली दिलेली (P), (Q) (R), (S) आणि (T) ही पाच वाक्ये योग्य अनुक्रमाने पुनर्रचना करा; त्यांनतर खालील प्रश्नांची उत्तर द्या.
P. एक दिवस मगर नदीच्या बाहेर आली.
Q. फार पूर्वी, एका नदीच्या काठावरील गुलाबी-सफरचंदाच्या झाडावर एक माकड राहत होते.
R. दयाळू माकडाने त्याला काही गुलाबी-सफरचंद दिली.
S. तो पोहून झाडाजवळ गेला आणि त्याला खूप भूक लागल्याचे त्याने माकडाला सांगितले.
T. मगरने त्याला धन्यवाद दिले आणि तो पुन्हा भेटू शकेल काय अशी विचारणा केली.

पुनर्रचना केल्यानंतर खालीलपैकी कोणते वाक्य तिसरे असेल?

DIRECTION: Rearrange the following five sentences (P), (Q), (R), (S) and (T) in the proper sequence to form a meaningful paragraph; then answer the questions given below them.
P. One day, a crocodile came out of the river.
Q. A long time ago, there was a monkey who lived in a rose-apple tree by the side of a river.
R. The kind monkey offered him a few rose-apples.
S. He swam up to the tree and told the monkey that he was very hungry.
T. The crocodile thanked him and asked him if he could visit him again.

Which of the following should be the THIRD sentence after rearrangement?

ہدایات: ان پانچ جملوں (P)، (Q)، (R)، (S) اور (T) کو با معنی پیرا بنانے کے لئے دوبارہ ترتیب دیجئے، پھر نیچے دے گئے سوالوں کے جواب دیجئے

P. ایک دن، مگرمچھ دریا سے باہر آی
Q. بہت وقت پہلے، ایک بندر تھا جو دریا کے کنارے ایک لال سیب کے پیڈ پر رہتا تھا.
R. رحیم بندر نے اسے کچھ لال سیب دے.
S. وو پیڈ تک تیرا اور بندر سے کہا کہ وو بہت بوکھا ہے
T. مگرمچھ نے اسکا شکریہ کیا اور کہا کہ کیا وو دوبارہ آسکھتا ہے

دوبارہ ترییب دینے کے بعد کون سا جملہ تیسرا ہونا چاہیے؟

A.S
A.S
A.S

B.Q
B.Q
B.Q

C.P
C.P
C.P

D.R
D.R
D.R

Answer: A.S
A.S
A.S

158 परिचय कौशल्याचा मुख्य घटक आहे

The main component of introduction skill is

تعارف کی مہارت کا بنیادی جزو ہے

A.पूर्व ज्ञान
A.Previous knowledge
A.سابقہ علم

B.वर्तमान ज्ञान
B.Present knowledge
B.موجودہ علم

C.उत्तेजन देऊन
C.Prompting
C.فی البدیہہ

D.धड्याचा वेग
D.Speed of the lesson
D.سبق کی رفتار

Answer: A.पूर्व ज्ञान
A.Previous knowledge
A.سابقہ علم

159 Out of the given four words only one is spelt correctly. Find the word that is correctly spelt.

A.Assassination

B.Amatuer

C.Absance

D.Aquaintance

Answer: A.Assassination

160 तीन प्रकारची दूधं आहेत, पराग, अमूल आणि नेस्टले. दूधामधील मेदास गैर मेद घटकांचे गुणोत्तर अनुक्रमे 1 : 4 , 1 : 2, 1 : 3 आहे. जर ही सर्व प्रकारची दूध समान प्रमाणामध्ये एकत्र केली गेली, तर मिश्रणामधील मेदास गैर मैद घटकांचे गुणोत्तर काय असेल

There are three types of milk, Parag, Amul and Nestle. The ratio of fat to the non-fat contents in milk is 1 : 4 , 1 : 2, 1 : 3 respectively. If all these three types of milk is mixed in equal quantity, the ratio of fat to the non-fat contents in the mixture will be

پیراگ، امول اور نیسلے تین قسم کے دودھ ہیں. دودھ میں چربی اور غیر چربی کے مواد کا تناسب بالترتیب 1: 4، 1: 2، 1: 3 ہے. اگر یہ تمام تین قسم کے دودھ کو برابر مقدار میں ملایا جائے تو، مرکب میں غیر چربی کے مواد پر چربی کا تناسب کیا ہو گا

A.47 : 13
A.47 : 13
A.47 : 13

B.17 : 43
B.17 : 43
B.17 : 43

C.3 : 5
C.3 : 5
C.3 : 5

D.10 : 18
D.10 : 18
D.10 : 18

Answer: A.47 : 13
A.47 : 13
A.47 : 13

161 एकाच घनाच्या X बाजूमध्ये दोन काप, Y बाजूमध्ये चार काप आणि Z बाजूमध्ये तीन काप केल्यावर किती लहान तुकडे मिळतात?

How many smaller pieces are obtained by making two cuts in X plane, four cuts in Y plane and three cuts in Z plane on the same cube?

پلین میں 3 کٹ مارنے سے کتنے چھوٹے ٹکڑے حاصل ہوتے ہیں؟ Z پلین میں 4 کت اور Y ،پلین میں 2 کٹ X ایک ہی کیوب کے

A.24
A.24
A.24

B.60
B.60
B.60

C.48
C.48
C.48

D.120
D.120
D.120

Answer: B.60
B.60
B.60

162 नियंत्रित करण्यास कठीण अशा लैंगिक स्वरूपाचा कल्पनाविलास करण्याची तीव्र इच्छा किंवा वर्तन यात अत्याधिक गुरफटलेले असणे

An excessive preoccupation with sexual fantasies urges or behavior that I difficult to control is known as

جنسی فنٹاسی کے ساتھ زیادہ تعاقب پر زور دیا جاتا ہے یا برتاو کرتا ہے کہ مجھے کنٹرول کرنے میں مشکل ہے

A.अनिवार्य लैंगिक वर्तन
A.compulsive sexual behaviour
A.جبری جنسی برتاو

B.नैराश्य
B.depression
B.ڈپریشن

C.ओढ
C.mania
C.جنون

D.मज्जातंतूचा विकार
D.neurosis
D.اعصابی خلل

Answer: A.अनिवार्य लैंगिक वर्तन
A.compulsive sexual behaviour
A.جبری جنسی برتاو

163 अॅमस्टरडॅम ही कोणत्या देशाची राजधानी आहे

Amsterdam is the capital of –

ایمسٹرڈم_____کا دارالسلطنت ہے

A.नॉर्वे
A.Norway
A. ناروے

B.स्विझरलँड
B.Switzerland
B.سوئزر لینڈ

C.नेदरलँड्स
C.Netherlands
C.نیدرلینڈز

D.जर्मनी
D.Germany
D.جرمنی

Answer: C.नेदरलँड्स
C.Netherlands
C.نیدرلینڈز

164 प्रोटीन याचा संयोग आहे

Proteins are composed of

پروٹینس مشتمل ہیں

A.कार्बन
A.Carbon
A. کاربن

B.हायड्रोजन
B.Hydrogen
B. ہائیڈروجن

C.नायट्रोजन
C.Nitrogen
C. نائٹروجن

D.वरील सर्व
D.All the above
D. مندرجہ بالا تمام

Answer: D.वरील सर्व
D.All the above
D. مندرجہ بالا تمام

165 **सूचना:** खालील प्रश्नात चार आकृत्या दिल्या आहेत. तीन आकृत्यांमध्ये एक विशिष्ट साम्य आहे आणि त्यामुळे त्यांचा एक गट तयार होतो. या गटात न बसणारी आकृती शोधून काढा.

DIRECTIONS: In the following questions, four figures are given. Three are similar in a certain way and so form a group. Find out which one of the figures does not belong to that group.

ہدایات: نیچے دیئے سوالوں میں چار شکلیں دی گئی ہے۔ ان میں سے 3 طرح سے ملتی جھلتی ہے، اس لئے انکا گروپ بنا ہے، آپ بتائے کہ کونسی شکل گروپ کا حصہ نہیں ہے؟

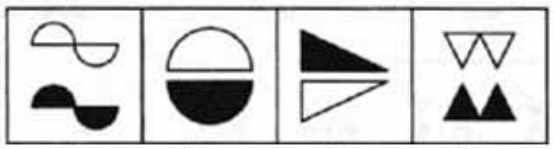

A. (A)

B. (B)

C. (C)

D. (D)

Answer: A. (A)

166 सूचना: खालील प्रश्नांमध्ये दिलेल्या पर्यायांमधून संबंधित अक्षर/शब्द/संख्या निवडा.

64: 8 :: 144 : ?

DIRECTIONS: In the following question, select the related letter/word/number from the given alternatives.

64: 8 :: 144 : ?

سمت: مندرجہ ذیل سوال میں، دیے گئے متبادل سے متعلقہ حرف/لفظ/نمبر منتخب کریں۔

64: 8 :: 144 : ?

A.10
A.10
A.10

B.12
B.12
B.12

C.15
C.15
C.15

D.13
D.13
D.13

Answer: B.12
B.12
B.12

167 सूचना: दिलेल्या पर्यायांमधून वेगळे ते बाहेर काढा.

DIRECTIONS: Find the odd one out from the given alternatives.

سمت: دیے گئے متبادل میں سے بے جوڑ کو تلاش کرو۔

A.E
A.E
A.E

B.O
B.O
B.O

C.I
C.I
C.I

D.U
D.U
D.U

Answer: A.E
A.E
A.E

168

सूचना: दिलेल्या पर्यायांमधून श्रेणी पूर्ण करणारी योग्य आकृती निवडा.

DIRECTIONS: Complete the series by choosing right figure from the given choices.

ہدایات: دیئے گئے اختیارات میں سے صحیح شکل کو چن کر سلسلہ کو مکمل کیجیئے

प्रश्न आकृत्या

Question Figures

سوالی شکل



उत्तरासाठी पर्यायी आकृत्या

Answer Figures

جوابی شکل

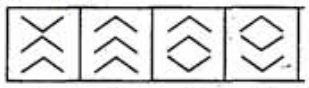

A B C D

A. (A)

B. (B)

C. (C)

D. (D)

Answer: C. (C)

169

सूचना: खालील प्रश्नात उत्तरातील पर्यायांपैकी कोणत्या पर्यायी आकृतीत प्रश्नातील आकृती अंतर्भूत आहे?

DIRECTIONS: In the given question find the answer figure in which question figure is embedded.

ہدایات: دیئے گئے سوال میں جواب والی شکل دریافت کیجیئے جس میں سوال والی شکل سرایت کرگئی ہے۔

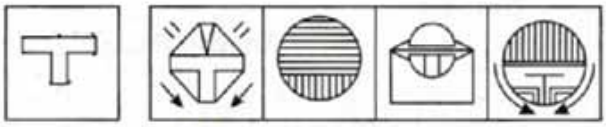

(A) (B) (C) (D)

A. (A)

B. (B)

C. (C)

D. (D)

Answer: A. (A)

170 अती उत्कृष्ट वर्गामध्ये आयक्यू गुणसंख्या असलेल्या लोकसंख्येचे प्रमाण

The percentage of the population having IQ score in the range of very superior category is

اعلی ترین درجے کا آئی کیو لیول (ذہانت کا معیار) رکھنے والی آبادی کا تناسب ہے:

A.2.8
A.2.8
A.2.8

B.2.5
B.2.5
B.2.5

C.2.2
C.2.2
C.2.2

D.5.0
D.5.0
D.5.0

Answer: C.2.2
C.2.2
C.2.2

171 सूचना: खालील माहितीचा काळजीपूर्वक अभ्यास करा आणि दिलेल्या प्रश्नांची उत्तरे द्या.
आठ मित्र - A, B, C, D, E, F, G आणि H — हे अशा चौरसकार टेबलाभोवती बसले आहेत की त्यापैकी चार जण टेबलच्या चार कोप-यांवर बसले आहेत तर इतर चार त्या चार बाजूंच्या मध्यभागी बसले आहेत. ते जे चार बाजूंच्या मध्यभागी बसून आहेत ते मध्याभागाकडे बघत आहेत तर जे लोक चार कोपऱ्यांवर बसले आहेत ते बाहेर बघत आहेत.
A हा C च्या डाव्या बाजूला तिसरा आहे, जो कोणत्याही कोपऱ्यांवर नाही बसला आहे. E हा F च्या डाव्या बाजूला तिसरा आहे, जो C चा तत्काळ शेजारी नाही. B आणि H हे एकमेकांचे तत्काळ शेजारी हि नाहीत किंवा क्रमशः A आणि D चे हि तत्काळ शेजारी नाहीत. D कुठल्याही बाजूच्या मध्यभागी बसलेला नाही आणि कमीतकमी दोन व्यक्ती A आणि D च्या मध्ये बसलेले पाहिजेत. E आणि G एकमेकांसमोर बसलेले आहेत परंतु एकमेकांना तोंड देत नाहीत. F हा C च्या विरुद्ध बसू शकत नाही.
खालीलपैकी कोण F च्या तत्काळ शेजा-याचे प्रतिनिधित्व करतो?

DIRECTIONS: Study the following information carefully and answer the given questions.
Eight friends – A, B, C, D, E, F, G and H— are sitting around a square table in such a way that four of them sit at four corners of the table while the other four sit in the middle of the four sides. Those who sit in the middle of the four sides face the centre while those who sit at the four corners face outside.
A sits third to the left of C, who does not sit at any of the corners. E sits third to the left of F, who is not an immediate neighbour of C. B and H are neither immediate neighbours of each other nor of A and D respectively. D does not sit in the middle of any sides and at least two person should sit between A and D. E and G sit opposite to each other but do not face each other. F cannot sit opposite C.
Who among the following represent the immediate neighbours of F?

ہدایات: مندرجہ ذیل معلومات کو دھیان سے پڑھیں اور دیے گئے سوالوں کے جواب دیں۔
ایک مربع میز کے ارد گرد بیٹھے ہوئے ہیں اس طرح سے کہ ان میں سے چار میز کے – H اور G، F، E، D، C، B، A - آٹھ دوست چاروں کونوں پر بیٹھا ہے جبکہ باقی چار چاروں کناروں کے درمیان میں بیٹھے ہیں۔ جو لوگ چاروں کونوں کے درمیان میں بیٹھے ہیں ان کا رخ مرکز کی طرف جبکہ چاروں کناروں پر بیٹھے لوگوں کا رخ باہر کی طرف ہے۔
C کا C کے بائیں سے تیسرے پر بیٹھا ہے، جو E، F کے بائیں طرف سے تیسرے پر بیٹھا ہے، جو کسی بھی کونے پر نہیں بیٹھا ہے۔ A، C کسی بھی کناروں کے درمیان میں D کے پڑوسی ہیں۔ D اور A نہ تو بالترتیب ایک دوسرے کے اور نہ ہی Hاور B فوری پڑوسی نہیں ہے۔ ایک دوسرے کے مخالف بیٹھے ہوئے ہیں لیکن G اور E کے درمیان کم سے کم دو لوگ بیٹھے ہونے چاہیے۔ D اور A نہیں بیٹھا ہے اور کے مخالف نہیں بیٹھ سکتا ہے۔ F، C ایک دوسرے کا سامنا نہیں کر رہے ہیں۔
کے فوری پڑوسی کی نمائندگی کرتا ہے؟ F مندرجہ ذیل میں سے کون

A.HG
A.HG
A.HG

B.GA
B.GA
B.GA

C.BE
C.BE
C.BE

D.AH
D.AH
D.AH

Answer: B.GA
B.GA
B.GA

172 सूचना: खालील प्रश्नांमध्ये दिलेल्या पर्यायांमधून संबंधित अक्षर/शब्द/संख्या निवडा.

TGVL : 720515 :: GPAE : ?

DIRECTIONS: In the following question, select the related letter/word/number from the given alternatives.

TGVL : 720515 :: GPAE : ?

سمت: مندرجہ ذیل سوال میں، دیے گئے متبادل سے متعلقہ حرف/لفظ/نمبر منتخب کریں۔

TGVL : 720515 :: GPAE : ?

A.27122226
A.27122226
A.27122226

B.415827
B.415827
B.415827

C.41330
C.41330
C.41330

D.20112622
D.20112622
D.20112622

Answer: D.20112622
D.20112622
D.20112622

173 दिलेली अदलाबदल : चिन्हे - आणि ×, तसेच आकडे 3 आणि 5 ; तर 2 × 5 – 3 ÷ 2 चे मूल्य किती ?

Given interchanges: signs ÷ and +, and numbers 2 and 4; then the value of 2 + 4 × 3 ÷ 2 is

دیئے گئے تبادلے: علامات ÷ اور +، اور نمبر 2 اور 4؛ تو 2 + 4 × 3 ÷2کی تعداد ہے

A.10
A.10
A.10

B.9
B.9
B.9

	C.8 C.8 C.8
	D.7 D.7 D.7
Answer:	A.10 A.10 A.10

174	131 × 141 =? 131 × 141 =? ?= 141×131
	A.18471 A.18471 A.18471
	B.18651 B.18651 B.18651
	C.15421 C.15421 C.15421
	D.15241 D.15241 D.15241
Answer:	A.18471 A.18471 A.18471

175	सायकोलॉजीची पहिली प्रयोगशाळा _____यांचा द्वारे स्थापन करण्यात आली. First lab of Psychology was established by نفسیات کی پہلی لیب کس نے قائم کی تھی؟

A.फ्रान्सिस गॅलटन
A.Francis Galton
A.فینسس گیلٹن

B.डॉ. सिगमंड फ्रायड
B.Dr. Sigmund Frend
B.ڈاکٹر سگمنڈ فرائیڈ

C.विल्हेल्म वंडट
C.Wilhem Wundt
C.ولہم ونٹ

D.डेफर्ड बेनेट
D.Defred Benet
D. ڈفریڈ بنٹ

Answer: C.विल्हेल्म वंडट
C.Wilhem Wundt
C.ولہم ونٹ

176 **सूचना:** खालील प्रश्नात कागदाच्या एक तुकड्याला प्रश्नातील आकृतीत दाखविल्याप्रमाणे घडी घातली आहे. उत्तरादाखल पर्यायांमधून अशी आकृती निवडा जी भोक पडल्यानंतर उलगडलेल्या कागदाचे स्वरूप दाखवेल.

DIRECTIONS: In the following question a piece of paper is folded in the manner shown in the question figure(s). Select the figure out of the answer choices showing the unfolded pattern after the punches (cut).

ہدایات: نیچے دیئے گئے سوالوں میں کاغذ کا ایک ٹکڑا اس طرح جوڑا گیا ہے جیسے سوال کی شکل میں بتایا گیا ہے، دیئے گئے جوابات کے اختیارات میں سے اس طرح انتخاب کیجیئے کہ کٹ لگانے کے بعد بغیر جوڑا ہوا پیٹرن دکھائی دے۔

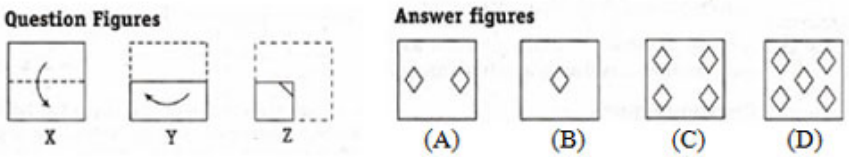

A. (A)

B. (B)

C. (C)

D. (D)

Answer: B. (B)

177 सूचना : खालील प्रत्येक प्रश्नात दोन विधाने I आणि II दिलेले आहेत. हे विधान एकतर स्वतंत्र कारण असू शकतात किंवा स्वतंत्र कारणांचे परिणाम असू शकतात. यांपैकी एक विधान इतर विधानाचा परिणाम असू शकतो. दोन्ही विधाने वाचा आणि खालीलपैकी कोणत्या उत्तराचा पर्याय या दोन्ही विधानांमधील संबंधांचे वर्णन करतो ते ठरवा.

विधान :
I. शहराला पाणीपुरवठा करणारे सर्व तलाव पावसाळ्यात दुसऱ्या महिन्याच्या अखेरीस भरगच्च भरून वाहणे सुरु झाले आहेत.
II. वेगवेगळ्या भागांत पावसाचे पाणी साचल्याने शहरातील सामान्य जीवन पावसाळ्याच्या पहिल्या दोन महिन्यांत काही वेळा विस्कळीत झाले आहे.

DIRECTIONS: Below in each question are given two statements I and II. These statements may be either independent causes or may be effects of independent causes. One of these statements may be the effect of the other statement. Read both the statements and decide which of the following answer choice correctly depicts the relationship between these two statements.

Statements:
I. All the lakes supplying water to the city started overflowing at the end of the second month into the monsoon.
II. The normal life in the city has been disrupted quite a few times during the first two months of the monsoon due to water logging at various parts.

ہدایات: نیچے ہر سوال میں دو بیانات I اور II آزاد وجوہات یا پھر آزاد وجوہات کے اثرات ہو سکتے ہیں۔ انہیں گئے ہیں۔ یہ بیانات یا تو بیانات میں سے ایک بیان دوسرے کا اثر ہو سکتا ہے۔دونوں بیانات پڑھیں اور فیصلہ کریں کہ نیچے دیے گئے کس جواب کا انتخاب ان دونوں بیانات کے در میان تعلق کو ٹھیک سے ظاہر کرتا ہے۔

بیانات:
I – مون سون کے دوسرے ماہ کے آخر میں شہر کو پانی فراہم کرنے والی تمام جھیلوں میں طغیانی آ گئی۔
II ۔ شہر کی معمول کی زندگی میں مون سون کے پہلے دو ماہ کے دوران شہر کے مختلف حصّوں میں پانی اکٹھا ہو جانے کی وجہ سے کئی مرتبہ خلل پڑا۔

A.विधान I कारण आहे आणि विधान II त्याचा परिणाम आहे;
A.Statement I is the cause and statement II is its effect;
A.بیان نمبر I وجہ ہے اور بیان نمبر II اس کا اثرہے۔

B.विधान II कारण आहे आणि विधान I त्याचा परिणाम आहे;
B.Statement II is the cause and statement I is its effect;
B. بیان نمبر II وجہ ہے اور بیان نمبر I اس کا اثرہے۔

C.विधान I आणि II दोन्ही स्वतंत्र कारणे आहेत;
C.Both the statements I and II are independent causes
C. دونوں بیانات I اور II آزاد وجوہات ہیں۔

D.विधान I आणि II दोन्ही स्वतंत्र कारणांचे परिणाम आहेत;
D.Both the statements I and II are effects of independent causes;
D. دونوں بیانات نمبر I اور نمبر II آزاد وجوہات کے اثرات ہیں۔

Answer: D.विधान I आणि II दोन्ही स्वतंत्र कारणांचे परिणाम आहेत;
D.Both the statements I and II are effects of independent causes;
D. آزاد وجوہات کے اثرات ہیں۔ II اور نمبر I دونوں بیانات نمبر

178 गहाळ वर्ण शोधा.
Insert the missing character.
گمنام حرف یہاں ڈالے

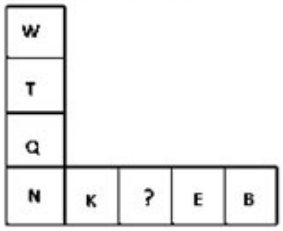

A. H

B. L

C. G

D. F

Answer: A. H

179 तुम्हाला सामान्य विद्यार्थ्यांसोबत अंध विद्यार्थ्यास शिकविण्याची संधी मिळाल्यास तुम्ही त्याला कशी वागणूक द्याल

If you get an opportunity to teach a visually challenged student along with normal students, what type of treatment would you like to give him

اگر آپ کو عام طلباء کے ساتھ بصری طور پر معذور طالب علم کو پڑھانے کا موقع ملے، تو آپ اس کے ساتھ کس طرح کا برتاو کرنا پسند کریں گے

A.इतर विद्यार्थ्यांचे नुकसान होऊ शकेल म्हणून त्याच्याकडे अधिक लक्ष देणार नाही
A.Not giving him extra attention because majority may suffer
A.بہت زیادہ توجہ نہ دے کر کیوں کہ اکثریت متاثر ہوسکتی ہے

B.सहानुभूती दाखवेन
B.Show sympathy
B.ہمدردی دکھائیں گے

C.तुम्ही विचार कराल की त्याच्या नशिबी अंधत्व असल्याने तुम्ही काहीही करू शकत नाही
C.You will think that blinders is his destiny and hence you cannot do anything
C.آپ سوچیں گے کہ نابینائی اس کی قسمت تھی اور اس لئے آپ کچھ نہیں کرسکتے

D.त्याच्यासाठी पहिल्या रांगेत आसन तयार करेन आणि स्थान संदेशग्राहक लहरीवर शिकविण्याचा प्रयत्न करेन
D.Arrange a seat in the front row and try to teach at place communicant whim
D.سامنے والی قطار میں ایک سیٹ کا انتظام کریں گے اور ان سے بات چیت کرتے ہوئے پڑھانے کی کوشش کریں گے

Answer: D.त्याच्यासाठी पहिल्या रांगेत आसन तयार करेन आणि स्थान संदेशग्राहक लहरीवर शिकविण्याचा प्रयत्न करेन
D.Arrange a seat in the front row and try to teach at place communicant whim
D.سامنے والی قطار میں ایک سیٹ کا انتظام کریں گے اور ان سے بات چیت کرتے ہوئے پڑھانے کی کوشش کریں گے

180 जर 3 = 3 × 1 ,4 = 8 × 2 ,6 = 24 × 4 असेल तर 21 × 7 चे मूल्य शोधा?

If 4 × 24=6, 2×8=4, 1×3=3, then find the value of 7×21?

اگر 4 × 24=6, 2×8=4, 1×3=3 تو 7×21 کی ویلیو جانیں؟

A. 42

B. 21

C. 3

D. 63

Answer: C. 3

181 प्राथमिक पायरीसाठी शिकवण्याचे कोणते तंत्र योग्य नाही?

Which teaching technique is not suitable for primary stage?

کونسی تدریس کی تکنیک ابتدائی مرحلے کیلئے مناسب نہیں ہے؟

A.परिसंवाद
A.Symposium
A.سمپوزیم

B.स्पष्टीकरण
B.Explanation
B.وضاحت

C.सराव
C.Drill
C.ڈرل

D.प्रश्न विचारणे
D.Questioning
D.سوال پوچھنا

Answer: A.परिसंवाद
A.Symposium
A.سمپوزیم

182 विकासाचा जीवन काळ ____ने प्रारंभ होतो आणि ____ ने संपतो

Life span of development begins with _____ and ends with_____

_____ سے زندگی کی ترقی کا دور شروع ہوتا اور_____ کے ساتھ ختم ہوتا ہے

A.जन्म आणि मृत्यू
A.birth, death
A.پیدائش اور موت

B.गर्भधारणा, वृद्धत्व
B.conception, old age
B.حمل ٹھہرنا,بڑھاپا

C.अर्भकावस्थ, वृद्धत्व
C.infancy, old age
C.شیرخوارگی، عمر درازی

D.गर्भधारणा, मृत्यू
D.conception ,death
D.حمل ٹھہرنا,موت

Answer: D.गर्भधारणा, मृत्यू
D.conception ,death
D.حمل ٹھہرنا,موت

183 सूचना: प्रत्येक प्रश्नाला एक प्रमुख विधानासोबत चार विधाने आहेत ज्यांच्याखाली A, B, C, आणि D असे चार विधान आहेत. क्रमवार विधानांची जोडी निवडा ज्यामध्ये प्रथम विधान दुसऱ्या विधानाला सुचवते, आणि दोन्ही विधाने तर्किकदृष्ट्या प्रमुख विधानासोबत निगडित असेल.

चित्रपट यशस्वी आहे किंवा असफल ठरला आहे.
A. चित्रपट यशस्वी आहे.
B. चित्रपट यशस्वी झाला नाही.
C. चित्रपट अयशस्वी आहे.
D. चित्रपट अयशस्वी नाही.

DIRECTIONS: Each question has a main statement followed by four statements labelled A, B, C and D. Choose the ordered pair of statements, where the first statement implies the second, and the two statements are logically consistent with the main statement.

The movie is either successful or unsuccessful.
A. The movie is successful
B.The movie is not successful
C.The movie is unsuccessful.
D.The movie is not unsuccessful.

ہدایت: ہر سوال میں ایک جملہ ہے جسکے بعد چار جملےاے، بی،سی اور ڈی کے نام سے دئے گئے ہیں اسمیں منسلک جوڑیوں کو چنئے۔ جہاں پہلا جملہ دوسرے جملہ کی اور اشارہ کر رہا ہے اور دو جملے منطقی مرکزی بیان کے مطابق ہیں

یہ فلم یا تو کامیاب ہے یا ناکام
Aفلم کامیاب ہے ۔
Bفلم کامیاب نہیں ہے ۔
Cفلم ناکام ہے ۔
Dفلم ناکام نہیں ہے ۔

A.AC
A.AC
A.AC

B.BA
B.BA
B.BA

C.CB
C.CB
C.CB

D.AB
D.AB
D.AB

Answer: C.CB
C.CB
C.CB

184 1972च्या या दिवशी, मानवी पर्यावरणावर स्टॉकहोम परिषद स्विडनमध्ये आयोजित करण्यात आली. तेव्हापासून त्यादिवशी जागतीक पर्यावरण दिन साजरा केला जातो. ती तारीख सांगा

On this day in 1972, the Stockholm Conference on Human Environment was held in Sweden. Since then the World Environment Day is celebrated on this day. State the date

میں، انسانی ماحولیات پر اسٹاک ہوم کانفرنس ، سویڈن میں منعقد ہوئی تھی ۔ اسکے بعد سے عالمی ماحول دن اس دن کو منایا جاتا ہے. تاریخ بتائے

A.मार्च 8
A.42802
A. 8 مارچ

B.जून 5
B.42891
B. 5 جون

C.मे 22
C.42877
C. 22 مئی

D.ऑक्टोबर 8
D.Oct. 8
D. 8 اکتوبر

Answer: B.जून 5
B.42891
B. 5 جون

185 खालीलपैकी अशुद्ध शब्द कोणता ?

A.वल्गना

B.कल्पना

C.सरपण

D.वाइट

Answer: D.वाइट

186 अनुक्रमे 7, 3, 4, 6 व 5 फू.उंची असलेल्या पाच मुलींची सरासरी उंची (फू.मध्ये) काढा.

The heights of five girls are 7, 3, 4, 6 and 5 ft. find the average height of girls (in ft.).

5اور 7,3,4,6 پانچ لڑکیوں کی اونچائی (فٹ میں FT ہے لڑکیوں کی اوسط لمبائی نکالئے)

A.27
A.27
A.27

B.5
B.5
B.5

C.57
C.57
C.57

D.67
D.67
D.67

Answer: B.5
B.5
B.5

187 पिकाची कापणी झाल्यावर मातीतून कोणता घटक सर्वात जास्त संपुष्टात येतो?

Which element is depleted most from the soil after a crop is harvested?

کون سا عنصر ایک فصل کاشت کے بعد مٹی سے سب سے زیادہ ختم ہو جاتا ہے

A.नायट्रोजन
A.Nitrogen
A. نائٹروجن

B.पोटॅशियम
B.Potassium
B. پوٹاشیم

C.फॉस्फेट
C.Phosphate
C. فاسفیٹ

D.फ्लोराइड
D.Fluoride
D. فلورائیڈ

Answer: B.पोटॅशियम
B.Potassium
B. پوٹاشیم

188 अजय त्याच्या उत्पन्नापैकी 45% किराणावर खर्च करतो. महागाईमुळे, किराण्याची किंमत 20% नी वाढली. अजयचे उत्पन्न 12% नी वाढले. आधी घेतलेल्या किराणा च्या प्रमाणाइतक्याच किमतीचा किराणा खरेदी करण्यासाठी त्याचे उत्पन्न किती टक्क्यांनी वाढायला हवे?

Ajay used to spend 45% of his income on groceries. Due to inflation, the cost of groceries increases by 20%. Also Ajay's income increases by 12%. What percentage of his increased income should he spend on groceries to buy the same quantities of groceries that he bought earlier?

اجے اپنی آمدنی کا 45%گھریلو سامان پر خرچ کرتا ہے۔ افراط زر کی وجہ سے، گھریلو سامان کی قیمت 20% بڑھ جاتی ہے. اجے کی آمدنی میں اضافہ 12%ہے. ان کی بڑھتی ہوئی آمدنی میں سے اتنی مقدار میں گھریلو سامان خریدنے کے لئے کتنا فی صد خرچ کرنا چاہئے جو وہ پہلے خرید تا تھا۔

(A) $46\frac{1}{14}\%$

(B) $56\frac{3}{14}\%$

(C) $48\frac{3}{14}\%$

(D) $60\frac{9}{14}\%$

Answer: (C) $48\frac{3}{14}\%$

189 यापैकी कोणती आकृती कारखाना, उत्पादन आणि मशिनरी यांच्या दरम्यानचे नाते दर्शवते?

Which of the following diagrams indicates the best relation between Factory, Product and Machinery?

مندرجہ ذیل ڈایاگراموں میں سے کون سی فیکٹری، پروڈکٹ اور مشینری کے درمیان سب سے بہتر تعلق ہے؟

(A) 

(B) 

(C) 

(D) 

Answer: (D) 

190

$36^2 = (6)^?$

$36^2 = (6)^?$

$36^2 = (6)^?$

A.5
A.5
A.5

B.4
B.4
B.4

C.6
C.6
C.6

D.8
D.8
D.8

Answer:

B.4
B.4
B.4

191 अलिश एका निश्चित बिंदूपासून उत्तरेस 30 कि.मी. जाते, नंतर तिच्या उजवीकडे वळून ती 15 कि.मी. जाते. यानंतर ती तिच्या उजवीकडे वळून 30 कि.मी.जाते. ती तिच्या सुरुवातीच्या बिंदूपासून कोणत्या दिशेला आहे?

Alish goes 30 km towards North from a fixed point, then after turning to her right she goes 15 km. After this she goes 30 km after turning to her right. In which direction is she from her starting point?

ایلیش ایک متعین جگہ سے شمال کی طرف 30 کلومیٹر چلتی ہے- پھر اپنی داہنی جانب مڑنے کے بعد 15 کلومیٹر چلتی ہے اس کے بعد اپنی داہنی جانب مڑ کر 30 کلومیٹر چلتی ہے- تو وہ اپنی ابتدائی جگہ سے کس سمت میں ہے؟

For More Info And Videos About TAIT-Exam Syllabus And Other Exam Visit My Channel
BADSHAHimp SubScribe Like & Share WWW.YouTube.com/BADSHAHimp

A.पूर्व
A.East
A.مشرق

B.पश्चिम
B.West
B.مغرب

C.उत्तर पूर्व
C.North East
C.شمالی مشرق

D.दक्षिण पूर्व
D.South East
D.جنوبی مشرق

Answer: A.पूर्व
A.East
A.مشرق

192 एका विशिष्ट सांकेतिक भाषेमध्ये, जर SANDWICH हा शब्द ADSHCIWN असा कूटबध्द केला जात असेल, GEOMETRY हा शब्द त्या भाषेत कसा कूटबध्द केला जाईल?

In a certain code language, if the word SANDWICH is coded as ADSHCIWN, then how is the word GEOMETRY coded in that language?

ایک مخصوص ضابطے کی زبان میں، اگر لفظ SANDWICH کو ADSHCIWN لکھاجاتاہے، تو اس زبان میں لفظ GEOMETRY کو کیسے لکھاجائیگا؟

A.EGMRTYEO
A.EGMRTYEO
A.EGMRTYEO

B.EMGRYTEO
B.EMGRYTEO
B.EMGRYTEO

C.EMGRYETO
C.EMGRYETO
C.EMGRYETO

D.EMGYRTEO
D.EMGYRTEO
D.EMGYRTEO

Answer: D.EMGYRTEO
D.EMGYRTEO
D.EMGYRTEO

193 Out of the given options, choose the most appropriate one to fill in the blank.
The boy _____by a dog.

A.was bitten

B.were bite

C.were bit

D.were bitten

Answer: A.was bitten

194 सूचना: दिलेल्या पर्यायांमधून वेगळे ते बाहेर काढा.

DIRECTIONS: Find the odd one out from the given alternatives.

سمت: دیے گئے متبادل میں سے بے جوڑ کو تلاش کرو۔

A.क्रिकेट
A.Cricket
A.کرکٹ

B.हॉकी
B.Hockey
B.ہاکی

C.बिलीयर्ड्स
C.Billiards
C.بلیئرڈس

D.फुटबॉल
D.Football
D.فٹ بال

Answer: C.बिलीयर्ड्स
C.Billiards
C.بلیئرڈس

195 पुढील जोडशब्द पूर्ण करा . '---------- मंगळ'

A.टंगळ

	B.गुरू
	C.शनी
	D.सूत्र
Answer:	A.टंगळ

196	पार्सेक याचे एकक आहे: Parsec is the unit of: پیرسیک یونٹ ہے کس کا:
	A.अंतर A.Distance A.دوری
	B.वेळ B.Time B.وقت
	C.प्रकाशाची तीव्रता C.Intensity of light C.روشنی کی کثافت
	D.चुंबकीय वेळ D.Magnetic time D.مقناطیسی وقت
Answer:	A.अंतर A.Distance A.دوری

197	9 प्राण्यांच्या गटामध्ये मांजराच्या पुढे 5 व्या स्थानावर उंदीर आहे. जर मांजर शेवटून दुसरे असेल तर, सुरुवातीपासून उंदराचे स्थान कितवे असेल ? Rat is 5 places ahead of Cat in a group of 9. If Cat is second from the last, what is Rat’s rank from the start? 9 کی جماعت میں چونہا بللی سے پانچ جگہ آگے ہے. اگر بللی آخر سے دوسری ہے، شرو سے چونھے کہ درجہ کیا ہے؟
	A.(1) 4 वे A.4th A.4th

B.(2) 5 वे
B.5th
B.5th

C.(3) 2 वे
C.2nd
C.2nd

D.(4) 7 वे
D.7th
D.7th

Answer: C.(3) 2 वे
C.2nd
C.2nd

198 $\frac{424\times424\times424-112\times112\times112}{424\times424+424\times112+112\times112}$ चे मूल्य काढा:

Find the value of:
$\frac{424\times424\times424-112\times112\times112}{424\times424+424\times112+112\times112}$

$\frac{424\times424\times424-112\times112\times112}{424\times424+424\times112+112\times112}$
کی قیمت معلوم کریں:

A. 412

B. 416

C. 312

D. 318

Answer: C. 312

199 जर एक कार्यकुशल शिक्षक होण्यासाठी तुमच्याकडे आवश्यक त्या सर्व संभाव्यता आहेत परंतु शाळेची प्रतिकूल परिस्थिती तुम्हाला मदत करत नाही. तुम्ही या वास्तविकतेसह कसे निभवून न्याल?

If you have all the potentialities to become an efficient teacher but the school's adverse conditions do not help you. How could you adjust with this reality?

اگر آپ میں ایک مؤثر استاد بننے کے لئے تمام ممکنہ صلاحیتیں ہیں لیکن اسکول کے منفی حالات آپ کی مدد نہیں کرتے ہیں.آپ اس حقیقت کے ساتھ کیسے ایڈجسٹ کرسکتے ہیں؟

For More Info And Videos About TAIT-Exam Syllabus And Other Exam Visit My Channel
BADSHAHimp SubScribe Like & Share YouTube WWW.YouTube.com/BADSHAHimp

A.तुम्ही तुमचे सर्वोत्कृष्ट प्रयत्न सुरू ठेवाल कारण तुम्हाला विश्वास आहे की या प्रतिकूल परिस्थितीतून काही उपाय समोर येईल
A.You will continue excellent efforts because you believe that unfavorable conditions lead to some solutions
A.آپ کو بہترین کوششیں جاری رکھنی ہوں گی کیونکہ آپ کو یقین ہے کہ ناقابل یقین حالات بعض مسائل حل کرتے ہیں

B.तुम्ही परिस्थिती नियंत्रणात आणण्यासाठी प्रशासकीय यंत्रणेची बळजबरी करण्याचा प्रयत्न कराल
B.You will try to force the administrative machinery to control the conditions
B.آپ حالات کو کنٹرول کرنے کے لئے انتظامی مشینری کو مجبور کرنے کی کوشش کریں گے

C.तुम्ही सध्याच्या परिस्थितीत अनिच्छेने काम कराल
C.You will work unwillingly under these prevailing situations
C.آپ ان موجودہ حالتوں کے تحت ناپسندی سے کام کریں گے

D.तुम्ही उपायाबद्दल विचार सुद्धा करण्याचा प्रयत्न करणार नाही
D.You will not even try to think about is solution
D.آپ حل کے بارے میں سوچنے کی کوشش بھی نہیں کریں گے

Answer: A.तुम्ही तुमचे सर्वोत्कृष्ट प्रयत्न सुरू ठेवाल कारण तुम्हाला विश्वास आहे की या प्रतिकूल परिस्थितीतून काही उपाय समोर येईल
A.You will continue excellent efforts because you believe that unfavorable conditions lead to some solutions
A.آپ کو بہترین کوششیں جاری رکھنی ہوں گی کیونکہ آپ کو یقین ہے کہ ناقابل یقین حالات بعض مسائل حل کرتے ہیں

200 जर खरी वेळ 9:27 असेल तर घड्याळामध्ये काय वेळ दर्शवली जाईल?

What time is shown by the mirror if the real time is 9:27?

اگر اصلی وقت 9:27 بجے ہو, تو آئینہ میں کیا وقت دکھے گا؟

A.3 : 33
A.3 : 33
A.3 : 33

B.2 : 33
B.2 : 33
B.2 : 33

C.3 : 27
C.3 : 27
C.3 : 27

D.2 : 23
D.2 : 23
D.2 : 23

Answer: B.2 : 33
B.2 : 33
B.2 : 33

For More Info And Videos About TAIT-Exam Syllabus And Other Exam Visit My Channel
BADSHAHimp SubScribe Like & Share YouTube WWW.YouTube.com/BADSHAHimp

Question Paper Title : TAIT_PAPER_8

Date of Exam : 2017-12-15 16:00:00.0

1	3/7+4/5÷7/10 = ? 3/7+4/5÷7/10 = ? 3/7+4/5÷7/10 = ?
	A.86/49 A.86/49 A.86/49
	B.14/22 B.14/22 B.14/22
	C.-7/10 C.-7/10 C.-7/10
	D.11/7 D.11/7 D.11/7
Answer:	D.11/7 D.11/7 D.11/7
2	खालीलपैकी अशुद्ध शब्द कोणता ?
	A.सूर्य
	B.सूर्योदय
	C.सूर्यास्त
	D.सुर्यावर्त
Answer:	D.सुर्यावर्त

For More Info And Videos About TAIT-Exam Syllabus And Other Exam Visit My Channel
BADSHAHimp SubScribe Like & Share WWW.YouTube/BADSHAHimp

3 यापैकी कोणती आकृती कुत्रा, मांसभक्षक, वाघ दर्शवते?

Which one of the following represents Dog, Carnivore, Tiger?

مندرجہ ذیل میں سے کون سا کتے، گوشت خور، چیتے کی نمائندگی کرتا ہے؟

(A) 

(B) 

(C) 

(D) 

Answer: (C) 

4 अनुप्रस्थ तरंग प्रचार करू शकतात:

Transverse waves can propagate:

مستعرض ترنگیں پھیل سکتی ہیں:

A.वायू आणि धातु दोन्हीमध्ये
A.Both in a gas and in a metal
A.گیس اور دھاتوں دونوں میں

B.गॅसमध्ये पण धातुमध्ये नाही
B.In a gas but not in a metal
B.گیس میں لیکن دھاتو میں نہیں

C.गॅसमध्ये नाही पण धातुमध्ये
C.Not in a gas but in a metal
C.گیس میں نہیں لیکن دھاتوں میں

D.न गॅसमध्ये न धातुमध्ये
D.Neither in a gas nor in a metal
D.نہ ہی گیس میں اور نہ ہی دھاتوں میں

For More Info And Videos About TAIT-Exam Syllabus And Other Exam Visit My Channel
BADSHAHimp SubScribe Like & Share YouTube WWW.YouTube/BADSHAHimp

Answer:	C.गॅसमध्ये नाही पण धातुमध्ये C.Not in a gas but in a metal C.گیس میں نہیں لیکن دھاتوں میں

5	व्हिक्टोरीया स्मारक हे_____येथे स्थित आहे – The Victoria Memorial is located at – ویکٹوریا میموریل _____ میں واقع ہے
	A.मुंबई A.Mumbai A.ممبئی
	B.चेन्नई B.Chennai B.چینئی
	C.कोची C.Kochi C.کوچی
	D.कोलकाता D.Kolkata D.کولکاتا
Answer:	D.कोलकाता D.Kolkata D.کولکاتا
6	कोणत्याही भाषेत अर्थाचे सर्वांत लहान एकक आहे Smallest unit of meaning in a language is ایک زبان میں سب سے چھوٹی اکائی کا مطلب ہے
	A.मांडणी A.Syntax A.الفاظ کی ترتیب
	B.आकारजनन B.Morpheme B.صرفیہ

For More Info And Videos About TAIT-Exam Syllabus And Other Exam Visit My Channel
BADSHAHimp SubScribe Like & Share YouTube WWW.YouTube/BADSHAHimp

C.ध्वनिघटक
C.Phoneme
C.صوتیہ

D.कोणतेही नाही
D.None
D.کوئی نہیں

Answer:

B.आकारजनन
B.Morpheme
B.صرفیہ

7

शिकवण — द्वारे देता येऊ शकते

Indoctrination can be done through—

اندراج --- کے ذریعے کیا جا سکتا ہے-

A.ब्रेन वॉशिंग (मत बदलण्यासाठी प्रभाव टाकणे
A.Brain washing
A.دماغ دھونا

B.एखाद्याच्या विचारधारेमध्ये संपूर्णपणे बदल करणे
B.Complete change in one's ideology
B.نظریات میں مکمل تبدیلی

C.एखाद्याच्या विश्वासामध्ये संपूर्णपणे बदल करणे
C.Complete change in one's faith
C.اپنے عقائد میں مکمل تبدیلی

D.वरील सर्व
D.All the above
D.مذکورہ تمام

Answer:

D.वरील सर्व
D.All the above
D.مذکورہ تمام

8

दिलेली अदलाबदल : चिन्हे + आणि ÷ , तसेच आकडे 2 आणि 3 ; तर 8 + 4 × 5 ÷ 2 - 3 चे मूल्य किती ?

Given interchanges: signs + and ÷, and numbers 2 and 3; then the value of 8 + 4 × 5 ÷ 2 - 3 is

دیئے گئے تبادلے: علامات + اور ÷، اور نمبر 2 اور 3؛ تو 8 + 4 × 5 ÷ 2 - 3کی تعداد ہے

For More Info And Videos About TAIT-Exam Syllabus And Other Exam Visit My Channel
BADSHAHimp SubScribe Like & Share WWW.YouTube/BADSHAHimp

A.11
A.11
A.11

B.4
B.4
B.4

C.6
C.6
C.6

D.8
D.8
D.8

Answer: A.11
A.11
A.11

For More Info And Videos About TAIT-Exam Syllabus And Other Exam Visit My Channel
BADSHAHimp SubScribe Like & Share WWW.YouTube/BADSHAHimp

9 सूचना: अर्थपूर्ण परिच्छेद निर्माण करण्यासाठी, खाली दिलेली (P), (Q) (R), (S) आणि (T) ही पाच वाक्ये योग्य अनुक्रमाने पुनर्रचना करा; त्यांनतर खालील प्रश्नांची उत्तर द्या.

P. लोकांचे संरक्षण करण्यासाठी भगवान श्रीकृष्णाने एका बोटाने गोवर्धन पर्वत उचलून धरला.
Q. त्यामुळे इंद्र देव खूप रागवला आणि त्याने वृंदावनवर वादळ सोडले.
R. इंद्र देवाला त्याची चूक कळून चुकली आणि त्याने श्रीकृष्णाकडे माफी मागितली.
S. वेळेवर पाऊस व्हावा यासाठी वृन्दावनमधील जनता दरवर्षी इंद्र देवाची पूजा करीत असे.
T. पण एके वर्षी, गोवर्धन पर्वताची पूजा करण्यास श्रीकृष्णाने लोकांना सुचविले.

पुनर्रचना केल्यानंतर खालीलपैकी कोणते वाक्य चौथे असेल?

DIRECTION: Rearrange the following five sentences (P), (Q), (R), (S) and (T) in the proper sequence to form a meaningful paragraph; then answer the questions given below them.
P. To protect the people Lord Krishna picked up the Govardhan hill on a single finger.
Q. This made Lord Indra very angry and he sent a storm to Vrindavan.
R. Lord Indra soon realized his mistake and apologized to Krishna.
S. People of Vrindavan used to worship Lord Indra for timely rains every year.
T. One year, Shri Krishna suggested that people should rather worship the Govardhan hill.

Which of the following should be the FOURTH sentence after rearrangement?

ہدایات: ان پانچ جملوں (P)، (Q)، (R)، (S) اور (T) کو با معنی پیرا بنانے کے لئے دوبارہ ترتیب دیجئے، پھر نیچے دے گئے سوالوں کے جواب دیجئے

P. لوگوں کو بچانے کے لئے دیوتا کرشنا نے گووردن پہاڈ اپنی انگلی پر اٹھایا.
Q. اسنے دیوتا اندرا کو گسسا دلایا اور اسنے ورنداون میں آندھی بیجھ دی.
R. دیوتا اندرا کو جلدی اپنی گلتی کا احساس ہوا اور کرشنا سے معافی مانگی.
S. ورنداون کے لوگ ہر سال وقت پی بارش ہونے کے لئے دیوتا اندرا کی عبادت کرتے تھے.
T. ایک سال، شری کرشنا نے صلاح دی کہ لوگوں کو گووردن پہاڈ کی عبادت کرنی چاہیے.

دوبارہ ترییب دینے کے بعد کون سا جملہ چوتھا ہونا چاہیے؟

A.P
A.P
A.P

B.Q
B.Q
B.Q

C.R
C.R
C.R

D.S
D.S
D.S

For More Info And Videos About TAIT-Exam Syllabus And Other Exam Visit My Channel
BADSHAHimp SubScribe Like & Share YouTube WWW.YouTube/BADSHAHimp

Answer: A.P
A.P
A.P

10 किदाम्बी श्रीकांत हे _____या खेळाशी संबंधित आहेत

Kidambi Srikanth is associated with the game of –

کیدامبی سریکانتھ _____ گیم سے جڑا ہوا ہے

A.टेनिस
A.Tennis
A.ٹینس

B.बॅडमिंटन
B.Badminton
B.بیڈمنٹن

C.क्रिकेट
C.Cricket
C. کرکٹ

D.फुटबॉल
D.Football
D.فٹبال

Answer: B.बॅडमिंटन
B.Badminton
B.بیڈمنٹن

11 3 वर्षे 4 महिने महिन्यांमध्ये रूपांतरीत करा.

Convert 3 years 4 months into months?

3سال 4 مہینے کو مہینوں میں بدلیں؟

A.44 महिने
A.44 months
A.44مہینے

B.34 महिने
B.34 months
B.34مہینے

For More Info And Videos About TAIT-Exam Syllabus And Other Exam Visit My Channel
BADSHAHimp SubScribe Like & Share WWW.YouTube/BADSHAHimp

C.30 महिने
C.30 months
C.30مہینے

D.40 महिने
D.40 months
D.40مہینے

Answer: D.40 महिने
D.40 months
D.40مہینے

12 $\sqrt{\frac{49}{25}}+\sqrt{\frac{81}{36}}=?$

A. 9/10

B. 9/8

C. 87/30

D. 9/13

Answer: C. 87/30

13 2 वर्षांच्या अभिची मावशी त्याला त्याच्या आईच्या मांडीवरून घेण्याचा प्रयत्न करते तेव्हा तो रडतो, याचे कारण आहे

Abhi 2 years old cries when his aunt tries to take him from his another's lap due to

2 سالہ ابھئے روتا ہے جب اس کی چچی ان کی گود سے لینے کی کوشش کرتی ہے کیونکہ

A.सामाजिक चिंता
A.social anxiety
A.سماجی اندیشہ

B.भावनिक चिंता
B.emotional anxiety
B.جذباتی اندیشہ

C.अपरिचित व्यक्तींबद्दल चिंता
C.stranger anxiety
C.اجنبیت کا اندیشہ

D.वियोगाबद्दल चिंता
D.separation anxiety
D.علاحدگی کا اندیشہ

Answer: D.वियोगाबद्दल चिंता
D.separation anxiety
D.علاحدگی کا اندیشہ

14 भारताचे रेल्वे मंत्री कोण आहेत?

Who is the Railway Minister of India?

ہندوستان کا ریلوے کا وزیر کون ہے؟

A.सुरेश प्रभु
A.Suresh Prabhu
A.سریش پربھو

B.राजनाथ सिंह
B.Rajnath Singh
B.راجناتھ سنگھ

C.पीयूष गोयल
C.Piyush Goyal
C.پیوش گوئل

D.अरुण जेटली
D.Arun Jaitley
D.ارون جیٹلی

Answer: C.पीयूष गोयल
C.Piyush Goyal
C.پیوش گوئل

15 मानसरोगतज्ञानुसार उच्च क्षमता, उच्च सृजनशीलता, आणि उच्च वचनबद्धता आहे

According to Psychologists combination of high ability, high creativity and high commitment is

ماہرینِ نفسیات کے مطابق اعلی ترین قابلیت، اعلی ترین تخلیقی صلاحیت اور اعلی ترین جذبے مل کر بنتے ہیں:

A.कौशल्य
A.Skills
A.مہارتیں

B.प्रतिभाशाली
B.Giftedness
B.وہبی صلاحیت

C.प्रतिभा
C.Talent
C.(جوہر ٹائلنٹ)

D.सृजनशीलता
D.Creativity
D.تخلیقی صلاحیت

Answer: B.प्रतिभाशाली
B.Giftedness
B.وہبی صلاحیت

16 मुलांना शिकविण्याची सर्वात उत्तम शिक्षण पद्धत म्हणजे त्यांना

The best learning procedure in teaching children is to have them—

بچوں کو تعلیم دینے میں سیکھنے کا بہترین طریقہ کار ---- ہے-

A.एखादी गतिविधी कशा प्रकारे केली जाऊ शकते त्याचे वाचन करून घेणे
A.Read about the way an activity can be performed
A.ایک سرگرمی کی کارکردگی کا مظاہرہ کرنے کے انداز میں پڑھیں

B.एखादी गतिविधी कशा प्रकारे केली जाऊ शकते त्याबद्दल लिहून घेणे
B.Write about the way an activity can be performed
B.جس طرح سے ایک سرگرمی کی جا سکتی ہے اس کے بارے میں لکھیں

C.एखादी गतिविधी केली जात असताना त्याचे निरिक्षण करणे
C.See an activity as it is being performed
C.ایک سرگرمی دیکھیں جیسا کہ اسے کیا جا رہا ہے

D.गतिविधी त्यांनी स्वतः करणे
D.Perform the activity themselves
D.سرگرمی ان سےکروائیں

Answer: D.गतिविधी त्यांनी स्वतः करणे
D.Perform the activity themselves
D.سرگرمی ان سےکروائیں

17	येन हे _____ देशाचे चलन आहे Yen is the currency of – _____ کی کرنسی ہے
	A.जपान A.Japan A.جاپان
	B.चीन B.China B.چین
	C.बेल्जियम C.Belgium C.بیلجیم
	D.दक्षिण कोरीया D.South Korea D.جنوبی کوریا
Answer:	A.जपान A.Japan A.جاپان
18	खालीलपैकी सर्वात लहान अपूर्णांक शोधा Find the smallest of the following fractions مندرجہ ذیل کسور میں سے سب سے چھوٹی کسر تلاش کریں
	A.13/15 A.13/15 A.13/15
	B.29/41 B.29/41 B.29/41
	C.5/6 C.5/6 C.5/6
	D.54/71 D.54/71 D.54/71

Answer: B.29/41
B.29/41
B.29/41

19 आययुसीएन 2009 लाल यादीत, किती प्रजाती विलूप्त होण्याच्या धोक्यात आल्या आणि यासाठी यादीबद्ध झाल्या?

On the IUCN 2009 red list, how many species are threatened with extinction and listed as such?

آئی یو سی این کی ۲۰۰۹ کی سرخ فہرست میں کتنی نسلوں کے ختم ہو جانے کی دھمکی دی گئی ہے

A.400 पेक्षाकमी
A.Fewer than 400
A. 400 سے بھی کم

B.अंदाजे 10,000
B.Approximately 10,000
B. 10،000 تقریبا

C.अंदाजे 18,000
C.Approximately 18,000
C. 18،000 تقریبا

D.यापैकी एकही नाही
D.None of these
D. ان میں سے کوئی بھی نہیں

Answer: C.अंदाजे 18,000
C.Approximately 18,000
C. 18،000 تقریبا

20 एक बरणी मधाने भरलेली आहे. एक व्यक्ती बरणीमधून 20% मध काढतो आणि त्याच्या जागी साखरेचे द्रावण टाकतो. त्याने ही प्रक्रिया 4 वेळा केली आणि त्यामुळे तेथे बरणीमध्ये फक्त 512 ग्रॅम मध राहिले, बरणीचा उर्वरित भाग हा साखरेच्या द्रावणाने भरलेला होता. सुरूवातीला बरणीमधील मधाचे प्रमाण किती होते

A jar was full with honey. A person used to draw out 20% of the honey from the jar and repalced it with sugar solution. He has repeated the same process 4 times and thus there was only 512 gm of honey left in the jar, the rest part of the jar was filled with the sugar solution. The initial amount of honey in the jar was

ایک مرتبان شہد سے بھرا ہوا تھا۔ ایک شخص اس سے 20% شہد نکالا اور اسکی جگہ چینی کامحلول ڈال دیا۔ اس نے 4 بار اسی عمل کو دہرایا اور اس طرح جار میں صرف 512 گرام بچ گیا، جار کا باقی حصہ چینی حل سے بھرا ہوا تھا. جار میں شہد کی ابتدائی رقم کتنی تھی

A.1.25 किग्रॅ
A.1.25 kg
A.1.25 کلو گرام

B.1 किग्रॅ
B.1 kg
B.1 کلو گرام

C.1.5 किग्रॅ
C.1.5 kg
C.1.5 کلو گرام

D.यांपैकी कोणतेही नाही
D.None of these
D.ان میں کوئی نہیں

Answer: A.1.25 किग्रॅ
A.1.25 kg
A.1.25 کلو گرام

21 ‘ गणेश ’ या शब्दाची संधी सोडवा.

A.गण + एश

B.गण + ईश

C.गणु + ईश

D.यापैकी नाही

Answer: B.गण + ईश

22 उत्कृष्ठ कामगीरीमध्ये दर्शवलेली कार्याच्या विस्तीर्ण श्रेणीमध्ये विलक्षण बुद्धिमत्तेच्या कार्यक्षमतेला म्हणतात:

Exceptional general intellectual efficiency shown in superior performance in a wide range of tasks is known as:

استثنائی عام ذہنی کار کردگی جس کا مظاہرہ مختلف طرح کے کاموں میں اعلی ترین انجام دہی کی شکل میں ہوتا ہے ، اسے جانا جاتا ہے:

A.बौद्धिक प्रतिभा
A.Intellectual giftedness
A.ذہنی خداداد صلاحیت

B.बौद्धिक पातळी
B.Intelligence Quotient
B. (انٹیلی جنس کوشنٹ ذہانت کا نتیجہ)

C.चमत्कार
C.Miracle
C.معجزہ

D.वरीलपैकी एकही नाही
D.None of the above
D.ان میں سے کوئی نہیں

Answer: A.बौद्धिक प्रतिभा
A.Intellectual giftedness
A.ذہنی خداداد صلاحیت

23 वेब पृष्ठावरील एक शब्द ज्यावर क्लिक केले तर इतर दस्तऐवज उघडतात त्याला म्हणतात –

A word on a web page which opens
other document when clicked on it, is a -

ویب پیج پر وہ لفظ جس پر کلک کرنے سے ایک دستاویز کھلتے ہیں وہ ہے-

A.अँकर
A.Anchor
A.اینکر

B.हायपर लिंक
B.Hyper link
B.ہائپر لنک

C.संदर्भ
C.Reference
C.ریفرینس

D.यूआरएल
D.URL
D.یوآرایل

Answer: B.हायपर लिंक
B.Hyper link
B.ہائپر لنک

24 निर्देश: खाली दिलेल्या प्रतीक-अक्षर-संख्यांच्या क्रमाचा संदर्भ घेणार्या या प्रश्नांची उत्तरे द्या:

2 P J @ 8 $ L B 1 V # Q 6 & G W 9 K C D 3 ≥ * E 5 F R 7 A Y 4

वर दिलेल्या व्यवस्थेतून सर्व चिन्हे काढण्यात आले तर खालील पर्यायापैकी कोणते संख्या \अक्षर डाव्या बाजूपासून सोळावा असेल?

DIRECTION: Answer these questions referring to the symbol-letter-number sequence given below:
2 P J @ 8 $ L B 1 V # Q 6 & G W 9 K C D 3 ≥ * E 5 F R 7 A Y 4

If all the symbols in the above arrangement are dropped, which of the following will be the sixteenth from the left end?

ہدایت جیل کے سوال دے ہے نشانو اور نمبرس اور لفجونپر مشتمل ہیں

2 P J @ 8 $ L B 1 V # Q 6 & G W 9 K C D 3 ≥ * E 5 F R 7 A Y 4

اگگر سارے نشان ہٹا دے جائے تو بچے ترتیب مے الٹے ہاتھ سے سولہوا حرف کونسا ہوگا ؟

A.3
A.3
A.3

B.D
B.D
B.D

C.7
C.7
C.7

D.4
D.4
D.4

Answer: B.D
B.D
B.D

25 सूचना: अर्थपूर्ण परिच्छेद निर्माण करण्यासाठी, खाली दिलेली (P), (Q) (R), (S) आणि (T) ही पाच वाक्ये योग्य अनुक्रमाने पुनर्रचना करा; त्यांनतर खालील प्रश्नांची उत्तर द्या.

P. लोकांचे संरक्षण करण्यासाठी भगवान श्रीकृष्णाने एका बोटाने गोवर्धन पर्वत उचलून धरला.
Q. त्यामुळे इंद्र देव खूप रागवला आणि त्याने वृंदावनवर वादळ सोडले.
R. इंद्र देवाला त्याची चूक कळून चुकली आणि त्याने श्रीकृष्णाकडे माफी मागितली.
S. वेळेवर पाऊस व्हावा यासाठी वृन्दावनमधील जनता दरवर्षी इंद्र देवाची पूजा करीत असे.
T. पण एके वर्षी, गोवर्धन पर्वताची पूजा करण्यास श्रीकृष्णाने लोकांना सुचविले.

पुनर्रचना केल्यानंतर खालीलपैकी कोणते वाक्य दुसरे असेल?

DIRECTION: Rearrange the following five sentences (P), (Q), (R), (S) and (T) in the proper sequence to form a meaningful paragraph; then answer the questions given below them.
P. To protect the people Lord Krishna picked up the Govardhan hill on a single finger.
Q. This made Lord Indra very angry and he sent a storm to Vrindavan.
R. Lord Indra soon realized his mistake and apologized to Krishna.
S. People of Vrindavan used to worship Lord Indra for timely rains every year.
T. One year, Shri Krishna suggested that people should rather worship the Govardhan hill.

Which of the following should be the SECOND sentence after rearrangement?

ہدایات: ان پانچ جملوں (P)، (Q)، (R)، (S) اور (T) کو با معنی پیرا بنانے کے لئے دوبارہ ترتیب دیجئے، پھر نیچے دے گئے سوالوں کے جواب دیجئے

P. لوگوں کو بچانے کے لئے دیوتا کرشنا نے گووردن پہاڈ اپنی انگلی پر اٹھایا.
Q. اسنے دیوتا اندرا کو گسسا دلایا اور اسنے ورنداون میں آندھی بیجھ دی.
R. دیوتا اندرا کو جلدی اپنی گلتی کا احساس ہوا اور کرشنا سے معافی مانگی.
S. ورنداون کے لوگ ہر سال وقت پی بارش ہونے کے لئے دیوتا اندرا کی عبادت کرتے تھے.
T. ایک سال، شری کرشنا نے صلاح دی کہ لوگوں کو گووردن پہاڈ کی عبادت کرنی چاہیے.

دوبارہ ترییب دینے کے بعد کون سا جملہ دوسرا ہونا چاہیے؟

A.T
A.T
A.T

B.S
B.S
B.S

C.Q
C.Q
C.Q

D.P
D.P
D.P

Answer: A.T
A.T
A.T

26 पुढील म्हण पूर्ण करा - 'वासरात लंगडी गाय ---------.'

A.उताणी.

B.अडाणी.

C.शहाणी.

D.घुसली.

Answer: C.शहाणी.

27 एका घनाकृतीच्या तीन अवस्था दाखविल्या आहेत. त्यांवर अवलंबून हे शोधून काढा की दिलेल्या घनाकृतीमध्ये 6 या अंकाच्या विरुद्ध बाजूला कोणता अंक असेल?

Three positions of a cube are given. Based on them, find out, which number is found opposite number 6 in a given cube?

ہدایات: ایک کیوب کی تین حالتیں دی گئی ہیں۔ ان کی بنیاد پر، دریافت کیجیئے، کونسا نمبرکیوب میں دیئے گئے 6 نمبر کی اپوزٹ ہے ؟



A. 3

B. 5

C. 4

D. 6

Answer: C. 4

28 सूचना: प्रश्नांची उत्तरे देण्यासाठी माहितीचा काळजीपूर्वक अभ्यास करा.
T, U, V, W, X,Y आणि Z हे सात लोक उत्तरेकडे तोंड करुन एका सरळ रेषेत बसलेले आहेत, पण ते याच क्रमाने बसलेले आहेत असे नाही. T हा W च्या डाव्या बाजूला पाचव्या जागेवर बसतो, जो कुठल्याही अंतिम टोकावर बसलेला नाही. दोन लोक Z आणि X यांच्या मध्ये बसतात. Y हा U च्या डाव्या बाजूला तिसऱ्या जागेवर बसतो. Y बरोबर मध्यभागी बसतो.
Z हा Y चा तत्काळ शेजारी नाही.
W च्या संदर्भात Z ची स्तिथी काय आहे?

DIRECTIONS: Study the information carefully to answer the questions.
Seven friends T, U, V, W, X,Y and Z are sitting in a straight line facing North. T sits fifth to the left of W, who does not sit at any of extreme ends. Two people sit between Z and X. Y sits third to the left of U. Y sits exactly in the middle.
Z is not an immediate neighbour of Y.
What is Z's position with respect to W?

ہدایات: سوالوں کے جواب دینے کے لیے معلومات کو دھیان سے پڑھیں۔
سات دوست T، U، V، W، X، Y اور Z شمال کا رخ کیے ہوئے ایک سیدھی لائن میں بیٹھے ہیں۔ T، W کے بائیں سے پانچویں پر بیٹھا ہے۔ W، X اور Y کے درمیان دو لوگ بیٹھے ہیں۔ X اور Z ہے، جو کہ کسی بھی انتہائی سرے پر نہیں بیٹھا ہے۔ U، Y کے بائیں سے تیسرے پر بیٹھا ہے۔ Z، Y کا فوری پڑوسی نہیں ہے۔ Y ٹھیک درمیان میں بیٹھا ہے۔
W کے تعلق سے Z کی پوزیشن کیا ہے؟

A.डावीककडून दुसरा
A.Second to the left
A.بائیں سے دوسری

B.उजवीकडून तिसरा
B.Third to the right
B.دائیں سے تیسری

C.डावीकडून चौथा
C.Fourth to the left
C.بائیں سے چوتھی

D.डावीकडे तिसरा
D.Third to the left
D.بائیں سے تیسری

Answer: C.डावीकडून चौथा
C.Fourth to the left
C.بائیں سے چوتھی

29 Out of the given options, choose the one which is the correct passive voice of the sentence given below.
Kindly do not smoke in public place.

A.You had been requested not to smoking in public place

B.You were requested not to have smoke in public place

C.You are requested not to smoke in public place

D.We are requesting you not to have smoke in public place

Answer: C.You are requested not to smoke in public place

30 Out of the given options which best expresses the meaning of the given Proverb?
Make hay while the sun shines.

A.If you have an opportunity to do something, do it before the opportunity expires

B.Finish all the agricultural work during day time

C.If you have an opportunity, you need not worry for future

D.It is only the lucky people who get good opportunities

Answer: A.If you have an opportunity to do something, do it before the opportunity expires

31 एका व्यक्तिकडे बोट दाखवून अमर म्हणतो – “त्या व्यक्तिचा भाऊ हा माझ्या पत्नीच्या वडिलांचा नातू आहे” मग ती व्यक्ति आणि अमर यांचे नाते काय?

Pointing towards a person Amar said – "That person's brother is the grandson of the father of my wife." How is that person related to Amar ?

آدمی کی طرف اشارہ کرکے عامر نے کہا – " اس اادمی کا بھائی میری بیوی کے باپ کا پوتا ہے." آدمی کا عامر سے کیا رشتہ تھا؟

A.वडील
A.Father
A.باپ

B.भाऊ
B.Brother
B.بھائی

C.मुलगा/मुलगी
C.Son/daughter
C.بیٹا یا بیٹی

D.ठरवणे शक्य नाही
D.Cannot be determined
D.مقرر نہیں ہوتا

Answer: A.वडील
A.Father
A.باپ

32 सूचना: खाली दिलेल्या विधान (A) आणि कारण (R) साठी, खालील पैकी योग्य पर्याय निवडा:

विधान (A): वटवाघूळ रात्री उडू शकते.
कारण (R): वटवाघूळ अल्ट्रासाऊंड लाटा वापरतात.

DIRECTION: For the Assertion (A) and Reason (R) given below, choose the correct alternative from the following:

Assertion (A): Bats can fly in the night. Reason (R): Bats use ultrasound waves.

ہدایت: نیچے دئیے گئے اسرشن (A) اور (R) وجہ کے لئے، مندرجہ ذیل میں سے صحیح متبادل منتخب کریں:

اسرشن (A): چمگادڑ رات میں اڑتے ہیں۔
وجہ (R): چمگادڑ الٹراساؤنڈ لہروں کا استعمال کرتے ہیں

A.दोन्ही (A) आणि (R) सत्य आहेत आणि (R) (A) च योग्य स्पष्टीकरण आहे
A.Both (A) and (R) are true and (R) is the correct explanation of (A)
A. (A) اور (R) دونوں صحیح ہیں اور (R) (A) کی درست وضاحت ہے

B.दोन्ही (A)आणि (R) खरे आहेत, परंतु (R) (A) च योग्य स्पष्टीकरण नाही
B.Both (A) and (R) are true, but (R) is not the correct explanation of (A)
B. (A) اور (R) دونوں صحیح ہیں، لیکن (R) (A) کی درست وضاحت نہیں ہے

C.(A) सत्य आहे, परंतु (R) खोटे आहे
C.(A) is true, but (R) is false
C. (A) صحیح ہے، لیکن (R) غلط ہے

D.(A) खोटे आहे, परंतु (R) सत्य आहे
D.(A) is false, but (R) is true
D.(A) غلط ہے، لیکن (R) صحیح ہے

Answer: A.दोन्ही (A) आणि (R) सत्य आहेत आणि (R) (A) च योग्य स्पष्टीकरण आहे
A.Both (A) and (R) are true and (R) is the correct explanation of (A)
A. (A) اور (R) دونوں صحیح ہیں اور (R) (A) کی درست وضاحت ہے

33 खालीलपैकी कोणते शिकण्याचा पैलू नाही?

Which of the following is not an aspect of learning?

مندرجہ ذیل میں سے کونسا سیکھنے کا پہلو نہیں ہے؟

A.ज्ञानाचा संचय
A.The accumulation of knowledge
A.علم کامجموعہ

B.मज्जातंतुंचे संवेदीकरण
B.The sensitization of nerve fibres
B.اعصابی ریشوں کی حساسیت

C.आकलनातील बदल
C.Modification of perceptions
C.خیالات میں ترمیم

D.यापैकी कोणतेही नाही
D.None of these
D.ا ن میں سے کوئی بھی نہیں

Answer: B.मज्जातंतुंचे संवेदीकरण
B.The sensitization of nerve fibres
B.اعصابی ریشوں کی حساسیت

34 सूचना: प्रश्नांची उत्तरे देण्यासाठी माहितीचा काळजीपूर्वक अभ्यास करा.
T, U, V, W, X,Y आणि Z हे सात लोक उत्तरेकडे तोंड करुन एका सरळ रेषेत बसलेले आहेत, पण ते याच क्रमाने बसलेले आहेत असे नाही. T हा W च्या डाव्या बाजूला पाचव्या जागेवर बसतो, जो कुठल्याही अंतिम टोकावर बसलेला नाही. दोन लोक Z आणि X यांच्या मध्ये बसतात. Y हा U च्या डाव्या बाजूला तिसऱ्या जागेवर बसतो. Y बरोबर मध्यभागी बसतो.
Z हा Y चा तत्काळ शेजारी नाही.
रांगेच्या अंतिम टोकाला कोण बसतो?

DIRECTIONS: Study the information carefully to answer the questions.
Seven friends T, U, V, W, X,Y and Z are sitting in a straight line facing North. T sits fifth to the left of W, who does not sit at any of extreme ends. Two people sit between Z and X. Y sits third to the left of U. Y sits exactly in the middle.
Z is not an immediate neighbour of Y.
Who sit at the extreme ends of the line?

ہدایات: سوالوں کے جواب دینے کے لیے معلومات کو دھیان سے پڑھیں۔
T، U، V، W، X، Y اور Z شمال کا رخ کیے ہوئے ایک سیدھی لائن میں بیٹھے ہیں۔ W کے بائیں سے پانچویں پر بیٹھا T سات دوست ہے۔ U، Y کے درمیان دو لوگ بیٹھے ہیں۔ X اور Z ہے، جو کہ کسی بھی انتہائی سرے پر نہیں بیٹھا ہے۔ Y کے بائیں سے تیسرے پر بیٹھا ہے۔ Z، Y ٹھیک درمیان میں بیٹھا ہے۔ کا فوری پڑوسی نہیں ہے۔
لائن کے انتہائی سروں پر کون بیٹھا ہے؟

A.XZ
A.XZ
A.XZ

B.VX
B.VX
B.VX

C.YZ
C.YZ
C.YZ

D.TU
D.TU
D.TU

Answer: D.TU
D.TU
D.TU

35 सूचना: दिलेल्या पर्यायांमधून वेगळे ते बाहेर काढा.

DIRECTIONS: Find the odd one out from the given alternatives.

سمت: دیے گئے متبادل میں سے بے جوڑ کو تلاش کرو۔

A.विजार
A.Trousers
A.پاجامہ۔

B.सदरा
B.Shirt
B.شرٹ۔

C.कोट
C.Coat
C.کوٹ۔

D.जाकीट
D.Jacket
D.جیکٹ۔

Answer: A.विजार
A.Trousers
A.پاجامہ۔

36 भूकंपाची तीव्रता नोंदवण्याचे साधन आहे

The instrument to record the intensity of earthquake is

زلزلے کی شدت کو ریکارڈ کرنے کا آلہ ہے

A.फिजीओग्राफ
A.physiograph
A.فزیو گراف

B.सैस्मोग्राफ
B.seismograph
B.سیسمو گراف

C.कार्डिओग्राफ
C.cardiograph
C.کارڈیو گراف

D.बॅरोग्राफ
D.barograph
D.بیرو گراف

Answer: B.सैस्मोग्राफ
B.seismograph
B.سیسمو گراف

37 एका विशिष्ट सांकेतिक भाषेमध्ये, जर LIBERAL हा शब्द MJCFSBM असा कूटबध्द केला जात असेल, REDUCTION हा शब्द त्या भाषेत कसा कूटबध्द केला जाईल?

In a certain code language, if the word LIBERAL is coded as MJCFSBM, then how is the word REDUCTION coded in that language?

اگر لفظ LIBERAL کو MJCFSBM ایک مخصوص ضابطے کی زبان میں لفظ REDUCTION کو اس زبان میں کیسے لکھاجائیگا؟

A.EDCTBSHNM
A.EDCTBSHNM
A.EDCTBSHNM

B.SFEVDUJPO
B.SFEVDUJPO
B.SFEVDUJPO

C.SFEVCTJPO
C.SFEVCTJPO
C.SFEVCTJPO

D.SFDUCTJPO
D.SFDUCTJPO
D.SFDUCTJPO

Answer: B.SFEVDUJPO
B.SFEVDUJPO
B.SFEVDUJPO

38 विधान:
नियमित फी वाढल्यामुळे विद्यार्थी विनाअनुदानित महाविद्यालयात प्रवेश घेऊ शकत नाहीत.

कृतीचा कोर्स:
I. खाजगी विनाअनुदानित महाविद्यालयांच्या फी शासकीय महाविद्यालयांनी घेतलेल्या शुल्काप्रमाणेच कराव्यात.
II. शासनाला अशी खात्री करून घ्यावी लागेल की फी मध्ये ठराविक वाढ करणे आवश्यक आहे त्यापेक्षा अधिक नाही.

Statement:
Students are unable to take admission in private unaided colleges due to ever increasing fee.

Course of actions:
I. The fees of private unaided colleges should be made equal to the fees charged by government colleges.
II. The Government should ensure that the increase in fee is not more than what is required.

بیان:
فیس میں مسلسل اضافے کی وجہ سے طلباء امداد کے بغیر چلنے والے پرائیویٹ کالجوں میں داخلہ لینے سے قاصر ہیں۔

لائحہ عمل:
I۔ امداد کے بغیر چلنے والے پرائیویٹ کالجوں کی فیس گورنمنٹ کالجوں کی فیس کے برابر کر دینی چاہیے۔
II۔ حکومت کو یہ بات یقینی بنانا چاہیے کہ فیس میں ضرورت سے زائد اضافہ نہ کیا جائے۔

A.फक्त I अनुसरून आहे
A.Only I follows
A. صرف I لاگو ہو گا۔

B.फक्त II अनुसरण करते आहे
B.Only II follows
B. صرف II لاگو ہو گا۔

C.एकतर I किंवा II अनुसरून आहे
C.Either I or II follows
C. I یا II میں سے ایک لاگو ہو گا۔

D.I किंवा II दोन्हीपैकी काहीही अनुसरण करत नाही
D.Both I and II follow
D. I اور II دونوں لاگوہوں گے۔

Answer: B.फक्त II अनुसरण करते आहे
B.Only II follows
B. صرف II لاگو ہو گا۔

39	ओसीडी मध्ये याबाबत अति पछाडे जाऊ शकते In OCD the obsessions can be او سی ڈی میں وہم کا غلبہ ہوسکتا ہے
	A.विचार A.thought A.سوچ
	B.प्रतिमा B.images B.تصویریں
	C.तीव्र इच्छा C.urges C.اپیل
	D.a b व c D.a b and c D. ,a b اور c
Answer:	D.a b व c D.a b and c D. ,a b اور c
40	जगामधील सर्वांत मोठे रेल्वे प्लॅटफार्म _____हे आहे The longest railway platform in the world is the – دنیا میں سب سے طویل ریلوے پلیٹ فارم ہے -
	A.कोल्लम जंक्शन A.Kollam Junction A.کولام جنکشن
	B.गोरखपूर रेल्वे स्टेशन B.Gorakhpur Railway Station B.گورکھپور ریلوے اسٹیشن

C.खडकपूर रेल्वे स्टेशन

C.Kharagpur Railway Station

C.کھرگپور ریلوے اسٹیشن

D.हावडा रेल्वे स्टेशन

D.Howrah Railway Station

D.ہاؤڑا ریلوے اسٹیشن

Answer: C.खडकपूर रेल्वे स्टेशन

C.Kharagpur Railway Station

C.کھرگپور ریلوے اسٹیشن

41 Choose the word which is opposite in meaning to the given word.
DEVIATE

A.Concentrate

B.Diverge

C.Digress

D.Stray

Answer: A.Concentrate

42 एसपीएममध्ये प्रगतीशील मुदत यासाठी वापरले आहे-

In SPM progressive term has been used for

ایس پی ایم ترقیاتی اصطلاح میں استعمال کیا گیا ہے

A.अडचणीच्या पातळीत वाढ मांडलेल्या वस्तू
A.Items arranged in increasing difficulty level
A.اشیاء کو بڑھتی ہوئی دشواری کی سطح میں منظم کیا گیا ہے

B.अडचणीच्या पातळीत कमी स्तरावर मांडलेल्या वस्तू
B.Items are arranged in decreasing difficulty level
B.مشکلات کی سطح کو کم کرنے میں اشاروں کا بندوبست کیا جاتا ہے

C.वस्तूंची संख्या वाढत आहे
C.Items are increasing in number
C.نمبر میں اضافہ کر رہے ہیں

D.यापैकी एकही नाही
D.None of these
D. ان میں سے کوئی بھی نہیں

Answer: A.अडचणीच्या पातळीत वाढ मांडलेल्या वस्तू
A.Items arranged in increasing difficulty level
A.اشیاء کو بڑھتی ہوئی دشواری کی سطح میں منظم کیا گیا ہے

43 फोटोतील एका पुरुषाकडे बोट दाखवून एक स्त्री म्हणतेः “हे माझ्या सासऱ्यांच्या एकुलत्या नातवाच्या पत्नीचे सासरे आहेत” मग तो पुरुष आणि ती स्त्री यांचे नाते काय?

Pointing to a man in a photograph a woman says: “He is the father-in-law of the wife of the only grandson of my own father-in-law”. How is the man related to the woman?

تصویر میں ایک آدمیکی طرف اشارہ کرکے عورت نے کہا: " یے میرے اپنے سسر کے واحد پوتے کی بیوی کا سسر ہے". آدمی کا عورت سے کیا رشتہ تھا؟

A.मुलगा
A.Son
A.بیٹا

B.पती
B.Husband
B.شوہر

C.चुलत भाऊ
C.Cousin
C.چچا زاد

D.पुतण्या
D.Nephew
D.بتیجا

Answer: B.पती
B.Husband
B.شوہر

44 सूचना: खाली दिलेल्या प्रश्नात एक विधान आहे ज्याचे I आणि II असे दोन निष्कर्ष त्याखाली अंकित केलेले आहेत. या आधारे सर्वात योग्य पर्याय निवडा.

विधान:
आग्रा आणि दिल्लीला जोडणारा रस्ता हा सर्वात वेगवान प्रवासमार्ग आहे

निष्कर्ष:
I. आग्रा आणि दिल्लीला जोडणारा कोणताही रेल्वेमार्ग नाही.
II. आग्रा आणि दिल्लीला जोडणारा कोणताही वायूमार्ग नाही.

DIRECTIONS: The question below has a statement followed by two conclusions numbered I and II. Based on this choose the option that is most suitable.

Statement:
Road offers the fastest connectivity between Agra and Delhi.

Conclusions:
I. There is no rail connectivity between Agra and Delhi.
II. There is no air connectivity between Agra and Delhi.

ہدایات: نیچے دیے گئے سوال میں ایک بیان کے بعد دو نتائج I اور II دیے گئے ہیں۔ اس کی بنیاد پر انتہائی موزوں آپشن کا انتخاب کیجیے۔

بیان:
آگرا اور دہلی کے درمیان سب سے تیز سفر کرنے کا ذریعہ روڈ ہے.

نتیجے:
I. آگرا اور دہلی کے درمیان ریل کے ذریعے رابطہ نہیں ہے.
II. آگرا اور دہلی کے درمیان ہوائی سفر کے ذریعے رابطہ نہیں ہے.

A.केवळ निष्कर्ष क्रमांक I विधानास अनुसरून आहे
A.Only Conclusion I follows
A. صرف نتیجہ I لاگو ہو گا۔

B.केवळ निष्कर्ष क्रमांक II विधानास अनुसरून आहे
B.Only Conclusions II follows
B. صرف نتیجہ II لاگو ہو گا۔

C.निष्कर्ष क्रमांक I किंवा II अनुसरून आहे
C.Either I or II follows
C. I یا II میں سے ایک لاگو ہو گا۔

D.कोणताही निष्कर्ष अनुसरून नाही
D.Neither I nor II follow
D. I اور II میں سے کوئی بھی لاگو نہیں ہو گا۔

Answer: D.कोणताही निष्कर्ष अनुसरून नाही
D.Neither I nor II follow
D. I اور II میں سے کوئی بھی لاگو نہیں ہو گا۔

45	शिक्षकाचे प्रथम कर्तव्य त्याच्या — प्रति आहे A teacher’s first duty is to his— ایک استاد کا پہلا فرض اس کا -- ہے. A.समुदाय A.Community A.کمیونٹی B.मुख्याध्यापक B.Principal B.پرنسپل C.विद्यार्थी C.Students C.طلباء D.सह-शिक्षक D.Fellow-teachers D.ساتھی اساتذہ
Answer:	C.विद्यार्थी C.Students C.طلباء
46	"स्वराज्य हा माझा जन्म सिद्ध हक्क आहे आणि तो मी मिळवणारच", हे _____यांचे प्रसिद्ध विधान आहे – “Swaraj is my birth-right and I shall have it”, this was the famous quote of – سوراج میرا پیدائشی حق ہے اور میں اسے لونگا"، یہ _____ کا مشہور مقولہ تھا A.गोपाळ कृष्ण गोखले A.Gopal Krishna Gokhale A.گوپال کرشنا گوکھلے B.महात्मा गांधी B.Mahatma Gandhi B.مہاتما گاندھی C.बाळ गंगाधर टिळक C.Bal Gangadhar Tilak C.بال گنگا دھر تلک

D.जवाहरलाल नेहरु
D.Jawaharlal Nehru
D.جواہر لال نہرو

Answer: C.बाळ गंगाधर टिळक
C.Bal Gangadhar Tilak
C.بال گنگا دھر تلک

47 सूचना: प्रत्येक प्रश्नाला एक प्रमुख विधानासोबत चार विधाने आहेत ज्यांच्याखाली A, B, C, आणि D असे चार विधान आहेत. क्रमवार विधानांची जोडी निवडा ज्यामध्ये प्रथम विधान दुसऱ्या विधानाला सुचवते, आणि दोन्ही विधाने तर्किकदृष्ट्या प्रमुख विधानासोबत निगडित असेल.

तो एकतर विमानाने जाणार किंवा ट्रेनने.
A. तो विमानाने गेला.
B. तो विमानाने गेला नाही.
C. तो ट्रेनने गेला.
D. तो ट्रेनने गेला नाही.

DIRECTIONS: Each question has a main statement followed by four statements labelled A, B, C and D. Choose the ordered pair of statements, where the first statement implies the second, and the two statements are logically consistent with the main statement.

He either takes a flight or go by train .
A.He took a flight
B.He did not take a flight
C.He went by train .
D.He did not go by train

ہدایت: ہر سوال میں ایک جملہ ہے جسکے بعد چار جملےاے، بی،سی اور ڈی کے نام سے دئے گئے ہیں اسمیں منسلک جوڑیوں کو چنئے۔ جہاں پہلا جملہ دوسرے جملہ کی اور اشارہ کر رہا ہے اور دو جملے منطقی مرکزی بیان کے مطابق ہیں

وہ یا تو جہاز میں جاتا ہے یا ٹرین میں جاتا ہے
A۔ وہ جہاز میں جاتا ہے
B۔ وہ جہاز میں نہیں جاتا
C۔ وہ ٹرین میں گیا
D۔ وہ ٹرین میں نہیں گیا

A.AC
A.AC
A.AC

B.DA
B.DA
B.DA

	C.CB C.CB C.CB
	D.AB D.AB D.AB
Answer:	B.DA B.DA B.DA

48	Out of the given four words only one is spelt correctly. Find the word that is correctly spelt.
	A.Bizarre
	B.Bouyant
	C.Begining
	D.Becomeing
Answer:	A.Bizarre

49	DIRECTIONS: A sentence with an underlined phrasal verb is given below. Out of the four options, choose the one which can be substituted for the given phrasal Verb. The Chief Minister’s order to give compensation to the drought stricken farmers was carried out immediately by the administration.
	A.disobeyed
	B.implemented
	C.neglected
	D.postponed
Answer:	B.implemented

50 उच्चमाध्यमिक-शाळेतील मुलांमध्ये केलेल्या एका सर्वेक्षणाने दर्शवले की साधारणपणे शिक्षकांना —— करण्याची अनुमती दिली गेली पाहीजे

A survey of high-school students indicated that generally teachers should be allowed to——

ہائی اسکول کے طلبا کے ایک سروے نے بتایا ہے کہ عام طور پر اساتذہ کو --- اجازت دی جانی چاہئے-

A.सार्वजनिक ठिकाणी मद्यपान व धूम्रपान करणे
A.Drink and smoke in public
A.عوام میں شراب نوشی اور سگریٹ نوشی

B.जुगार खेळणे, जर तो कायदेशीर असेल तर
B.Gamble, if it is legal
B.جوا، اگر یہ قانونی ہے

C.सामान्य संतुलित जीवन जगणे
C.Lead normal balanced lives
C.عام متوازن زندگی کی قیادت کریں

D.विद्यार्थ्यांबरोबर डेटिंग करणे
D.Have dates with students
D.طالب علموں کے ساتھ باہر ملیں

Answer: C.सामान्य संतुलित जीवन जगणे
C.Lead normal balanced lives
C.عام متوازن زندگی کی قیادت کریں

51 32 महिलांच्या गटामध्ये शबनमच्या पुढे पाचव्या स्थानावर राजमाता आहे. शबनम शेवटून सतराव्या क्रमांकावर असेल तर राजमाता सुरुवातीपासून कितव्या स्थानावर आहे ?

Rajmata is 5 places ahead of Shabnam in a group of 32 women. If Shabnam is seventeenth from the last, at what position is Rajmata from the start?

عورتوں کی جماعت میں راجماتا شبنم سے پانچ جگہ آگے ہے. اگر شبنم آخر سے ستروی ہے، شرو سے راجماتا کس جگہ پر ہے؟ 32

A.(1) 14 व्या
A.14th
A.14th

B.(2) 15 व्या
B.15th
B.15th

C.(3) 11 व्या
C.11th
C.11th

D.(4) 12 व्या
D.12th
D.12th

Answer: C.(3) 11 व्या
C.11th
C.11th

52 DIRECTIONS: A sentence with an underlined word is given below. Find the Word which is most similar in meaning to the underlined word.
Franklin hoped to defeat his adversary in the afternoon's tennis match.

A.Opponent

B.Friend

C.Ally

D.Supporter

Answer: A.Opponent

53 आले एक देठ आहे आणि मूळ नाही कारण-

Ginger is a stem and not a root because

ادرک شاخ ہے اور جڑ نہیں ہے کیونکہ

A.त्यात क्लोरोफिलचा अभाव आहे
A.It lacks chlorophyll
A.اس میں خضرہ کی کمی ہے

B.त्यात नोड्स आणि इंटरनोड्स आहेत
B.It has nodes and internodes
B. اس میں گانٹھیں اور انٹرنوڈ ہیں

C.ते मातीमध्ये आडव्यारितीने वाढते
C.It grows horizontally in the soil
C.مٹی میں یہ افقی طور پر اگتی ہے

D.ते अन्न सामग्री साठवते
D.It stores food material
D.اس میں فوڈ مٹیریل اسٹور ہوتا ہے

Answer:

B.त्यात नोड्स आणि इंटरनोड्स आहेत
B.It has nodes and internodes
B. اس میں گانٹھیں اور انٹرنوڈ ہیں

54

सरळ रूप द्या:
728520292 + 243246 + 89242834 =?

Simplify:
728520292 + 243246 + 89242834 =?

آسان بنائیں:
728520292 + 243246+ 89242834 =?

A.818007372
A.818007372
A.818007372

B.818066372
B.818066372
B.818066372

C.819006372
C.819006372
C.819006372

D.818006372
D.818006372
D.818006372

Answer:

D.818006372
D.818006372
D.818006372

55

विशाल दक्षिणेला 2 किमी चालतो. मग तो उजवीकडे वळतो आणि 3 किमी चालतो, आता तो डावीकडे वळतो आणि 5 किमी चालतो. पुढे तो डावीकडे वळून 2 किमी अंतर चालतो. तर त्याचे तोंड कुठल्या दिशेला आहे?

Vishal walks 2 km towards South. He then turns right and walks 3 km; he now turns left and walks 5 km. Further he moves 2 km after turning to the left. In which direction is he facing now?

وشال جنوب کی طرف 2 کلومیٹر چلتا ہے۔ پھر وہ دائیں مڑتا ہے اور 3 کلومیٹر چلتا ہے، اب وہ بائیں مڑتا ہے اور 5 کلومیٹر چلتا ہے۔ مزید، بائیں مڑنے کے بعد وہ 2 کلومیٹر چلتا ہے۔ اس کا رخ کس سمت میں ہے؟

A.पश्चिम
A.West
A.مغرب

B.पूर्व
B.East
B.مشرق

C.उत्तर
C.North
C.شمال

D.दक्षिण
D.South
D.جنوب

Answer: B.पूर्व
B.East
B.مشرق

56 Out of the given options, choose the most appropriate one to fill in the blank.
The cat _____all the milk.

A.drank

B.have drink

C.have drank

D.has drink

Answer: A.drank

57 आपल्याकडे दिवस आणि रात्र यामुळे आहेत:

We have days and nights because of:

دن اور رات ہونے کی وجہ ہے

A.पृथ्वीचे परिभ्रमण
A.Earth’s rotation
A. زمین کی گردش

B.पृथ्वीची प्रदक्षिणा
B.Earth’s revolution
B. زمین کے گھومنا

C.सुर्याचे परिभ्रमण
C.Sun’s rotation
C. سورج کی گردش

D.सुर्याची प्रदक्षिणा
D.Sun’s revolution
D. سورج کا گھومنا

Answer: A.पृथ्वीचे परिभ्रमण
A.Earth’s rotation
A. زمین کی گردش

58 काटकोन त्रिकोणाचा लंब असतो:

Perpendicular of a right angled triangle is:

دائیں زاویہ مثلث کا پرپیڈیکولر ہے:

(A) $\sqrt{(base)^2 - (hypotenuse)^2}$

(B) $\sqrt{(hypo)^2 + (perpendicular)^2}$

(C) $\sqrt{(hypo)^2 - (base)^2}$

(D) $\sqrt{(hy-base)^2}$

Answer: (C) $\sqrt{(hypo)^2 - (base)^2}$

59 आंतर-व्यक्तिगत फरक ही संज्ञा— चा संदर्भ देते

The term intra-individual differences refers to—

انٹرا انڈیوجویل دفرینسز کی اصطلاح سے مراد ہے-

A.दिलेल्या व्यक्तीमधील विभिन्न गुणधर्मामधील फरक
A.Differences among the various traits in a given individual
A.ایک دیئے گئے شخص کی مختلف خصوصیات میں اختلافات

B.दोन किंवा अधिक व्यक्तींच्या दिलेल्या गुणधर्मातील फरक
B.Differences in a given trait between two or more individuals
B.دو یا اس سے زیادہ افراد کے درمیان ایک دی گئی خصوصیت میں اختلافات

C.दिलेल्या व्यक्तीच्या दिलेल्या गुणधर्मातील फरक जे कालक्रमाशी (प्रौढावस्था आणि शिक्षण) जोडलेले आहेत
C.Differences in a given trait individual associated with the passage of time (maturation and learning)
C.ایک دی گئی خصوصیت میں اختلافات انفرادی وقت کے گزرنے (پختگی اور سیکھنے) کے ساتھ منسلک

D.दिलेल्या व्यक्तीच्या दिलेल्या गुणधर्मातील फरक जे मोजमापातील चुकांसह जोडलेले आहेत
D.Differences in a given trait in a given individual associated with errors of measurement
D.پیمائش کی غلطیوں کے ساتھ منسلک کسی دیئے گئے شخص میں ایک دی گئی خاصیت میں اختلافات

Answer: A.दिलेल्या व्यक्तीमधील विभिन्न गुणधर्मामधील फरक
A.Differences among the various traits in a given individual
A.ایک دیئے گئے شخص کی مختلف خصوصیات میں اختلافات

60 2222×11+101×201+35=?

2222×11+101×201+35=?

2222×11+101×201+35=?

A.44770
A.44770
A.44770

B.44778
B.44778
B.44778

C.45000
C.45000
C.45000

D.40000
D.40000
D.40000

Answer: B.44778
B.44778
B.44778

61

सूचना: एकाच फाशाच्या चार अवस्था दाखविल्या आहेत, तर 5 ठिपके असणाऱ्या बाजूच्या विरुद्ध बाजूवर किती ठिपके असतील?

From the given four positions of a single dice, find the number of dots at the face opposite to the face having 5 dots.

ہدایات: ایک پاسہ کی دی گئی چار حالتوں میں سے، ایک پاسہ کے منہ پر نقطوں کی گنتی کو دریافت کیجیئے، جس کے سامنےوالے پاسہ کے منہ پر 5 نقطہ ہے؟

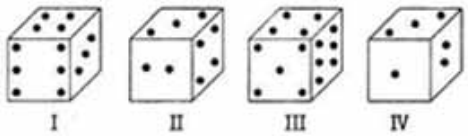

A. 2

B. 4

C. 3

D. 6

Answer: C. 3

62

विधान:
डिझेल वाहनांना चालना देण्यामुळे X शहरातील प्रदूषण लक्षणीय वाढत आहे.

कृतीचा कोर्स:
I. डिझेल वाहनांना शहरामध्ये प्रवेश करण्यास प्रतिबंध करा.
II. शहरामध्ये डिझेल वाहनांचा वापर प्रतिबंधित करा.

Statement:
The pollution in city X is increasing considerably due to plying of diesel vehicles.

Course of actions:
I. Ban diesel vehicles from entering city.
II. Ban use of diesel vehicles within city.

بیان:
X شہر میں ڈیزل گاڑیوں کی وجہ سے آلودگی کافی بڑھ رہی ہے۔

لائحہ عمل:
I۔ شہر میں ڈیزل گاڑیوں کے داخلے پر پابندی لگا دیں۔
II۔ شہر کے اندر ڈیزل کے استعمال پر پابندی لگا دیں۔

A.फक्त I अनुसरून आहे
A.Only I follows
A. صرف I لاگو ہو گا۔

B.फक्त II अनुसरण करते आहे
B.Only II follows
B. صرف II لاگو ہو گا۔

C.एकतर I किंवा II अनुसरून आहे
C.Either I or II follows
C. I یا II میں سے ایک لاگو ہو گا۔

D.I किंवा II दोन्हीपैकी काहीही अनुसरण करत नाही
D.Neither I nor II follows
D. I اور II میں سے کوئی بھی لاگو نہیں ہو گا۔

Answer: D.I किंवा II दोन्हीपैकी काहीही अनुसरण करत नाही
D.Neither I nor II follows
D. I اور II میں سے کوئی بھی لاگو نہیں ہو گا۔

63 882, 396 आणि 1404 ला पूर्णपणे भाग जाणारी सर्वांत मोठी संख्या काय असेल.

Find the greatest number which divides 882, 396 and 1404 exactly.

سب سے بڑا عدد تلاش کریں جو 882، 396 اور 1404 کو مکمل تقسیم کرتا ہے۔

A.22
A.22
A.22

B.18
B.18
B.18

C.16
C.16
C.16

D.14
D.14
D.14

Answer: B.18
B.18
B.18

64 सूचना: प्रत्येक प्रश्नाला एक प्रमुख विधानासोबत चार विधाने आहेत ज्यांच्याखाली A, B, C, आणि D असे चार विधान आहेत. क्रमवार विधानांची जोडी निवडा ज्यामध्ये प्रथम विधान दुसऱ्या विधानाला सुचवते, आणि दोन्ही विधाने तर्किकदृष्ट्या प्रमुख विधानासोबत निगडित असेल.

जर तु जीन्स घातली, तर तु उंच दिसू शकशील
A. तु जीन्स घातली
B. तु जीन्स घातली नाही
C. तु उंच दिसलास
D. तु उंच दिसलास नाही

DIRECTIONS: Each question has a main statement followed by four statements labelled A, B, C and D. Choose the ordered pair of statements, where the first statement implies the second, and the two statements are logically consistent with the main statement.

If you wear jeans , you will look taller .
A. You wore Jeans
B. You did not wear jeans
C. You looked taller
D. You did not look taller

ہدایت: ہر سوال میں ایک جملہ ہے جسکے بعد چار جملےاے، بی،سی اور ڈی کے نام سے دئے گئے ہیں اسمیں منسلک جوڑیوں کو چنئے۔ جہاں پہلا جملہ دوسرے جملہ کی اور اشارہ کر رہا ہے اور دو جملے منطقی مرکزی بیان کے مطابق ہیں

آپ جینز پہنیں تو لمبے دکھائی دیں گے۔
Aآپ نے جینز پہنی ۔
Bآپ نے جینز نہیں پہنی ۔
Cآپ لمبے دکھائی دیئے ۔
Dآپ لمبے دکھائی نہیں دیئے ۔

A.AC
A.AC
A.AC

B.BA
B.BA
B.BA

C.DA
C.DA
C.DA

D.CD
D.CD
D.CD

Answer: A.AC
A.AC
A.AC

65

दिलेल्या श्रेणीतील पुढची संज्ञा कोणती असेल?

The next term of a given pattern will be

دیئے گئے پیٹرن میں اگلی اصطلاح کیا ہوگی؟



(A) 

(B) 

(C) 

(D) यातील कोणताच पर्याय नाही.
None of these
ان میں سے کوئی نہیں

Answer: (B) 

66 सूचना: प्रत्येक प्रश्नात दोन विधाने आहेत ज्यांच्या नंतर दोन निष्कर्ष आहेत ज्यांना I आणि II असे अंकित केले आहे. सर्वसामान्यपणे ज्ञात असलेल्या तथ्यांशी विसंगती असली तरीही, हे सत्य असल्याचे तात्पुरते मानून, सामान्यतः ज्ञात असलेल्या तथ्यांकडे दुर्लक्ष करून, दिलेल्या निष्कर्षांपैकी कोणती तर्कशुद्धपणे विधानांचे अनुसरण करतात ते ठरवा.
विधाने :
काही डॉक्टर वकील असतात.
काही वकील आर्किटेक्ट असतात.
निष्कर्ष:
I. काही डॉक्टर आर्किटेक्ट असतात.
II. सर्व आर्किटेक्ट डॉक्टर असतात.

DIRECTION: Each of these questions consist of two statements followed by two conclusions marked I and II. Consider the statements to be true, even though they seem to be at variance with the commonly known facts and find out which of the given conclusion (s) logically follow (s) the statements, disregarding the commonly known facts.

Statements:
Some doctors are lawyers.
Some lawyers are architects.

Conclusions:
I. Some doctors are architects.
II. All architects are doctors.

سے نشان زد کیا گیا ہے۔ بیانات II اور I ہدایت:ان میں سے ہر ایک سوال دو بیانات پر مشتمل ہے جس کے بعد دو نتائج دیے گئے ہیں جنھیں کے درست ہونے پر غور کریں، اگرچہ وہ عام طور پر معلوم حقائق کے برعکس نظر آتے ہوں اور تلاش کریں کہ کون سے دیے گئے نتائج منطقی طور پر بیانات کی پیروی کرتے ہیں، عام طور پر معلوم حقائق سے قطع نظر۔

بیانات:
کچھ ڈاکٹر وکیل ہیں۔
کچھ وکیل معمار ہیں۔

حل:
I. کچھ ڈاکٹر معمار ہیں۔
II. سبھی معمار ڈاکٹر ہیں۔

A.जर केवळ निष्कर्ष I निघत असल्यास.
A.If only I follows
A.صرف I پیروی کرتا ہے۔

B.जर केवळ निष्कर्ष II निघत असल्यास.
B.If only II follows
B.صرف II پیروی کرتا ہے۔

C.जर दोन्ही निष्कर्ष I आणि II निघत नसल्यास.
C.If neither I nor II follows
C.نہ تو I نہ ہی II پیروی کرتا ہے

D.जर दोन्ही निष्कर्ष I आणि II निघत असल्यास.
D.If both I and II follow
D.I اور II دونوں پیروی کرتے ہیں

Answer: C.जर दोन्ही निष्कर्ष I आणि II निघत नसल्यास.
C.If neither I nor II follows
C.نہ تو I نہ ہی II پیروی کرتا ہے

67 खालील पैकी कोणते पूर्ण वर्ग आहे?

Which of the following is a perfect square?

مندرجہ ذیل میں سے کون ایک کامل مربع ہے؟

A.28225
A.28225
A.28225

B.12548
B.12548
B.12548

C.27225
C.27225
C.27225

D.144000
D.144000
D.144000

Answer: C.27225
C.27225
C.27225

68 **सूचना:** खालील प्रश्नात उत्तरातील पर्यायांपैकी कोणत्या पर्यायी आकृतीत प्रश्नातील आकृती अंतर्भूत आहे?

DIRECTIONS: In the given question find the answer figure in which question figure is embedded.

ہدایات: دیئے گئے سوال میں جواب والی شکل دریافت کیجیئے جس میں سوال والی شکل سرایت کرگئی ہے

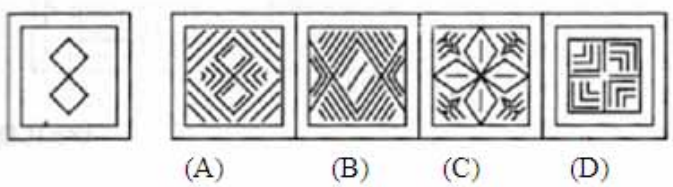

A. (A)

B. (B)

C. (C)

D. (D)

Answer: A. (A)

69 Out of the four alternatives, choose the one which can be substituted for the given words/sentence.
One who collects coins

A.Numismatist

B.Bibliophile

C.Equestrian

D.Chauffeur

Answer: A.Numismatist

70 बरेच वयस्क लोक वयानुसार शहाणे होतात, परंतु आकलनात्मक वेग चाचणीत फारशी चांगली कामगिरी करीत नाहीत. यामुळे जीवनकाळाशी संबंधित या कल्पनेस बळ मिळते की विकास हा असा असतो

Many older persons become wiser with age, yet perform more poorly on cognitive speed test this supports the life span perspective notion that development is

بہت سے عمردراز افرادعمر کے ساتھ عقلمند ہوتے ہیں،اس کے باجود ادراک کی رفتار کی ٹسٹ میں خراب ہوتے ہیں اس سے زندگی کے اس نقطہ نظر کو سہارا ملتا ہے کہ زندگی کی میعاد ترقی ہے

A.भौतिक
A.contentual
A.مواد

B.बहु दिशांनी होणारा
B.multidirectional
B.کثیر جہتی

C.आयुष्यभर होणारा
C.lifelong
C.پوری زندگی

D.बहु-मितीय
D.multi-dimensional
D.کثیر ابعادی

Answer: D.बहु-मितीय
D.multi-dimensional
D.کثیر ابعادی

71 यश चाचण्या ज्या साधारणपणे विद्यार्थ्यांचे नियमित वर्गातील कार्यप्रदर्शनाचे मूल्यमापन करण्यासाठी तयार केल्या जातात त्यांना — म्हटले जाते

The Achievement tests which are generally formulated for the evaluation of routine class room performances of the students are called—

کامیابی ٹیسٹ جو عام طور پر طلباء کے معمول کے کلاس کے کمرے کی کارکردگی کا جائزہ لینے کے لئے تیار کئے جاتے ہیں،وہ کہلاتے ہیں.

A.प्रमाणित यश चाचणी
A.Standardized Achievement Test
A.معیاری کامیابی کا امتحان

B.शिक्षकांनी तयार केलेली यश चाचणी
B.Teacher-made Achievement Test
B.استاد کا بنایا ہوا کامیابی ٹیسٹ

C.मानव कल्याण यश चाचणी
C.Human welfare Achievement Test
C.انسانی فلاح و بہبود کی کامیابی کی آزمائش

D.मूल्यमापन चाचणी
D.Evaluation Test
D.تشخیصی ٹیسٹ

Answer: B.शिक्षकांनी तयार केलेली यश चाचणी
B.Teacher-made Achievement Test
B.استاد کا بنایا ہوا کامیابی ٹیسٹ

72 सूचना: अर्थपूर्ण परिच्छेद निर्माण करण्यासाठी, खाली दिलेली (P), (Q) (R), (S) आणि (T) ही पाच वाक्ये योग्य अनुक्रमाने पुनर्रचना करा; त्यांनतर खालील प्रश्नांची उत्तर द्या.

P. लोकांचे संरक्षण करण्यासाठी भगवान श्रीकृष्णाने एका बोटाने गोवर्धन पर्वत उचलून धरला.
Q. त्यामुळे इंद्र देव खूप रागवला आणि त्याने वृंदावनवर वादळ सोडले.
R. इंद्र देवाला त्याची चूक कळून चुकली आणि त्याने श्रीकृष्णाकडे माफी मागितली.
S. वेळेवर पाऊस व्हावा यासाठी वृन्दावनमधील जनता दरवर्षी इंद्र देवाची पूजा करीत असे.
T. पण एके वर्षी, गोवर्धन पर्वताची पूजा करण्यास श्रीकृष्णाने लोकांना सुचविले.

पुनर्रचना केल्यानंतर खालीलपैकी कोणते वाक्य पहिले असेल?

DIRECTION: Rearrange the following five sentences (P), (Q), (R), (S) and (T) in the proper sequence to form a meaningful paragraph; then answer the questions given below them.
P. To protect the people Lord Krishna picked up the Govardhan hill on a single finger.
Q. This made Lord Indra very angry and he sent a storm to Vrindavan.
R. Lord Indra soon realized his mistake and apologized to Krishna.
S. People of Vrindavan used to worship Lord Indra for timely rains every year.
T. One year, Shri Krishna suggested that people should rather worship the Govardhan hill.

Which of the following should be the FIRST sentence after rearrangement

ہدایات: ان پانچ جملوں (P)، (Q)، (R)، (S) اور (T) کو با معنی پیرا بنانے کے لئے دوبارہ ترتیب دیجئے، پھر نیچے دے گئے سوالوں کے جواب دیجئے

P. لوگوں کو بچانے کے لئے دیوتا کرشنا نے گووردن پہاڈ اپنی انگلی پر اٹھایا.
Q. اسنے دیوتا اندرا کو گسسا دلایا اور اسنے ورنداون میں آندھی بیجھ دی.
R. دیوتا اندرا کو جلدی اپنی گلتی کا احساس ہوا اور کرشنا سے معافی مانگی.
S. ورنداون کے لوگ ہر سال وقت پی بارش ہونے کے لئے دیوتا اندرا کی عبادت کرتے تھے.
T. ایک سال، شری کرشنا نے صلاح دی کہ لوگوں کو گووردن پہاڈ کی عبادت کرنی چاہیے.

دوبارہ ترییب دینے کے بعد کون سا جملہ پہلے ہونا چاہیے؟

A.S
A.S
A.S

B.P
B.P
B.P

C.Q
C.Q
C.Q

D.R
D.R
D.R

Answer: A.S
A.S
A.S

73 **सूचना :**खालीलपैकी प्रत्येक आकृती एकदाच वापरून या आकृत्यांचे गट पाडा.

DIRECTIONS: Group the given figures into three classes using each figure only once.

ہدایات: دی گئ شکلوں میں سے ہرایک کو ایک بار استعمال کر کے شکلوں کے تین گروپ بنائے۔

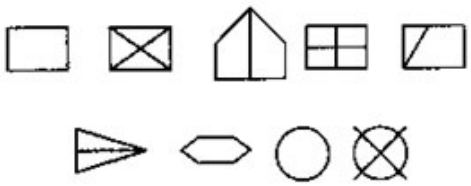

A. 1,2,4 ; 3,5,6 ; 7,8,9

B. 1,7,8 ; 3,5,6 ; 2,4,9

C. 1,3,4 ; 2,8,9 ; 5,6,7

D. 1,7,8 ; 2,3,6 ; 4,5,9

Answer: B. 1,7,8 ; 3,5,6 ; 2,4,9

74 ‘तारक’ या शब्दाचा विरुद्धार्थी शब्द कोणता ?

A.कारक

B.वाहक

C.मारक

D.खारक

Answer: C.मारक

75 सूचना: अर्थपूर्ण परिच्छेद निर्माण करण्यासाठी, खाली दिलेली (P), (Q) (R), (S) आणि (T) ही पाच वाक्ये योग्य अनुक्रमाने पुनर्रचना करा; त्यांनतर खालील प्रश्नांची उत्तर द्या.

P. लोकांचे संरक्षण करण्यासाठी भगवान श्रीकृष्णाने एका बोटाने गोवर्धन पर्वत उचलून धरला.
Q. त्यामुळे इंद्र देव खूप रागवला आणि त्याने वृंदावनवर वादळ सोडले.
R. इंद्र देवाला त्याची चूक कळून चुकली आणि त्याने श्रीकृष्णाकडे माफी मागितली.
S. वेळेवर पाऊस व्हावा यासाठी वृन्दावनमधील जनता दरवर्षी इंद्र देवाची पूजा करीत असे.
T. पण एके वर्षी, गोवर्धन पर्वताची पूजा करण्यास श्रीकृष्णाने लोकांना सुचविले

पुनर्रचना केल्यानंतर खालीलपैकी कोणते वाक्य पाचवे असेल?

DIRECTION: Rearrange the following five sentences (P), (Q), (R), (S) and (T) in the proper sequence to form a meaningful paragraph; then answer the questions given below them.
P. To protect the people Lord Krishna picked up the Govardhan hill on a single finger.
Q. This made Lord Indra very angry and he sent a storm to Vrindavan.
R. Lord Indra soon realized his mistake and apologized to Krishna.
S. People of Vrindavan used to worship Lord Indra for timely rains every year.
T. One year, Shri Krishna suggested that people should rather worship the Govardhan hill.

Which of the following should be the FIFTH sentence after rearrangement?

ہدایات: ان پانچ جملوں (P)، (Q)، (R)، (S) اور (T) کو با معنی پیرا بنانے کے لئے دوبارہ ترتیب دیجئے، پھر نیچے دے گئے سوالوں کے جواب دیجئے

P. لوگوں کو بچانے کے لئے دیوتا کرشنا نے گووردن پہاڈ اپنی انگلی پر اٹھایا.
Q. اسنے دیوتا اندرا کو گسسا دلایا اور اسنے ورنداون میں آندھی بیجھ دی.
R. دیوتا اندرا کو جلدی اپنی گلتی کا احساس ہوا اور کرشنا سے معافی مانگی.
S. ورنداون کے لوگ ہر سال وقت پی بارش ہونے کے لئے دیوتا اندرا کی عبادت کرتے تھے.
T. ایک سال، شری کرشنا نے صلاح دی کہ لوگوں کو گووردن پہاڈ کی عبادت کرنی چاہیے.

دوبارہ ترییب دینے کے بعد کون سا جملہ پانچوہ ہونا چاہیے؟

A.R
A.R
A.R

B.S
B.S
B.S

C.P
C.P
C.P

D.T
D.T
D.T

Answer: A.R
A.R
A.R

76 मनस्थितीमध्ये स्पष्ट बिघाड यामध्ये दिसते

Obvious mood disturbance is seen in

ظاہری مزاج میں خلل دیکھا جاتا ہے اس میں

A.छिन्नमनस्कता (स्किझोफ्रेनिया)
A.Schizophrenia
A.شیزو فرینیا

B.अल्झायमर्स
B.Alzheimer’s
B.الزائمر

C.नैराश्य
C.Depression
C.ڈپریشن

D.भस्म्या विकार (बींज इटिंग डिसऑर्डर)
D.Bling eating disorder
D.کھائے جانے کی بیماری

Answer: C.नैराश्य
C.Depression
C.ڈپریشن

77 गुणाकार करा:
6574 × 54 = ?

Multiply:
6574 × 54 = ?

ضرب دیں:
6574 × 54= ?

A.376556
A.376556
A.376556

B.344522
B.344522
B.344522

C.354996
C.354996
C.354996

D.245556
D.245556
D.245556

Answer: C.354996
C.354996
C.354996

78 सूचना: खालील प्रश्नांमध्ये दिलेल्या पर्यायांमधून संबंधित अक्षर/शब्द/संख्या निवडा.

बॅट : क्रिकेट ::

DIRECTIONS: In the following question, select the related letter/word/number from the given alternatives.

Bat : Cricket ::

سمت: مندرجہ ذیل سوال میں، دیے گئے متبادل سے متعلقہ حرف/لفظ/نمبر منتخب کریں۔

بلا : کرکٹ ::

A.वर्ग : विद्यार्थी
A.Class : Student
A.درجہ: طالب علم

B.धनुष्य : बाण
B.Bow : Arrow
B.کمان : تیر

C.काठी : हॉकी
C.Stick:Hockey
C.چھڑی:ہاکی

D.खेळ : फुटबॉल
D.Sports : Football
D.کھیل : فٹ بال

Answer: C.काठी : हॉकी
C.Stick:Hockey
C.چھڑی:ہاکی

79	ॲलो हे _____यांच्याद्वारे तयार केलेले चॅटींग-ॲप आहे – Allo is the chatting-app prepared by – ایلو (Allo) ایک چیٹنگ ایپ ہے جس کو _____ نے تیار کیا ہے
	A.मायक्रोसॉफ्ट A.Microsoft A.مائیکروسافٹ
	B.गुगल B.Google B.گوگل
	C.फेसबुक C.Facebook C.فیس بک
	D.यांपैकी कोणतेही नाही D.None of these D.ان میں سے کوئی نہیں
Answer:	B.गुगल B.Google B.گوگل
80	सूचना: दिलेल्या पर्यायांमधून वेगळे ते बाहेर काढा. DIRECTIONS: Find the odd one out from the given alternatives. سمت: دیے گئے متبادل میں سے بے جوڑ کو تلاش کرو۔
	A.35 A.35 A.35
	B.48 B.48 B.48
	C.75 C.75 C.75

D.84
D.84
D.84

Answer: A.35
A.35
A.35

81 सूचना: प्रश्नांची उत्तरे देण्यासाठी माहितीचा काळजीपूर्वक अभ्यास करा.
T, U, V, W, X,Y आणि Z हे सात लोक उत्तरेकडे तोंड करुन एका सरळ रेषेत बसलेले आहेत, पण ते याच क्रमाने बसलेले आहेत असे नाही. T हा W च्या डाव्या बाजूला पाचव्या जागेवर बसतो, जो कुठल्याही अंतिम टोकावर बसलेला नाही. दोन लोक Z आणि X यांच्या मध्ये बसतात. Y हा U च्या डाव्या बाजूला तिसऱ्या जागेवर बसतो. Y बरोबर मध्यभागी बसतो.
Z हा Y चा तत्काळ शेजारी नाही.
खालील पाचपैकी चार वरील रांगेमधील त्यांच्या बैठकीच्या स्थितींवर आधारित सारखे आहेत आणि त्यामुळे एक गट तयार करतात. कोण गटाचा भाग नसेल?

DIRECTIONS: Study the information carefully to answer the questions.
Seven friends T, U, V, W, X,Y and Z are sitting in a straight line facing North. T sits fifth to the left of W, who does not sit at any of extreme ends. Two people sit between Z and X. Y sits third to the left of U. Y sits exactly in the middle.
Z is not an immediate neighbour of Y.
Four of the following five are alike in a certain way based on their seating positions in the above line and so from a group. Which is the one that does not belong to the group?

ہدایات: سوالوں کے جواب دینے کے لیے معلومات کو دھیان سے پڑھیں۔
T، U، V، W، X، Y اور Z سات دوست شمال کا رخ کیے ہوئے ایک سیدھی لائن میں بیٹھے ہیں۔ W، T کے بائیں سے پانچویں پر بیٹھا ہے۔ Y، U کے درمیان دو لوگ بیٹھے ہیں۔ X اور Z ہے، جو کہ کسی بھی انتہائی سرے پر نہیں بیٹھا ہے۔ Y کے بائیں سے تیسرے پر بیٹھا ہے۔ Z، Y ٹھیک درمیان میں بیٹھا ہے۔ کا فوری پڑوسی نہیں ہے۔
مندرجہ بالا لائن میں اپنی بیٹھنے کی پوزیشن کی بنیاد پر مندرجہ ذیل پانچ میں سے چار ایک خاص طریقہ میں ایک جیسے ہیں اور اس طرح ایک گروپ تشکیل دیتے ہیں۔ کس کا تعلق گروپ سے نہیں ہے؟

A.UW
A.UW
A.UW

B.XV
B.XV
B.XV

C.ZT
C.ZT
C.ZT

D.YV
D.YV
D.YV

Answer: B.XV
B.XV
B.XV

82 सूचना: खालील प्रश्नांमध्ये दिलेल्या पर्यायांमधून संबंधित अक्षर/शब्द/संख्या निवडा.

मुलगी : सुंदर : : मुलगा : ?

DIRECTIONS: In the following question, select the related letter/word/number from the given alternatives.

Girl : Beautiful : : Boy : ?

سمت: مندرجہ ذیل سوال میں، دیے گئے متبادل سے متعلقہ حرف/لفظ/نمبر منتخب کریں۔

لڑکی : خوبصورت : : لڑکا : ؟

A.बुद्धिमान
A.Intelligent
A.اکالمند

B.शौर्यपूर्ण
B.Heroic
B.دلیر

C.धाडसी
C.Courageous
C.بہادر

D.देखणा
D.Handsome
D.وجیہ

Answer: D.देखणा
D.Handsome
D.وجیہ

83 परपोषित या मध्ये विभाजित आहेत

Heterotrophs are subdivided into

ہیٹروٹرافس کو تقسیم کیا گیا ہے

A.मांसभक्षक
A.Carnivores
A.کارنیورس

B.शाकाहारी
B.Herbivores
B.ہربائورس

C.सर्वभक्षक आणि परजीवी
C.Omnivores and parasites
C.اومنیورس اور پیراسائٹس

D.वरीलसर्व
D.All the above
D. مندرجہ بالا تمام

Answer:

D.वरीलसर्व
D.All the above
D. مندرجہ بالا تمام

84 निर्देश: खालील शब्दांची इंग्रजी शब्दकोशानुसार मांडणी करा.

(a) Leprosy
(b) Lessen
(c) Lesson
(d) Language
(e) Languid

DIRECTIONS: Arrange the following words according to the English dictionary.
(a) Leprosy
(b) Lessen
(c) Lesson
(d) Language
(e) Languid

ہدایت: انگریزی لغت کے مطابق مندرجہ ذیل الفاظ کو مرتب کریں۔
(a) Leprosy
(b) Lessen
(c) Lesson
(d) Language
(e) Languid

A.(d), (e), (a), (b), (c)
A.(d), (e), (a), (b), (c)
A.(d), (e), (a), (b), (c)

B.(e), (a), (c), (d), (b)
B.(e), (a), (c), (d), (b)
B.(e), (a), (c), (d), (b)

C.(c), (e), (a), (d), (b)
C.(c), (e), (a), (d), (b)
C.(c), (e), (a), (d), (b)

D.(e), (c), (a), (d), (b)
D.(e), (c), (a), (d), (b)
D.(e), (c), (a), (d), (b)

Answer: A.(d), (e), (a), (b), (c)
A.(d), (e), (a), (b), (c)
A.(d), (e), (a), (b), (c)

85 समाजामध्ये संपत्तीच्या असमान विभागणीच्या संदर्भात आवश्यकतांची कमी म्हणजे

Lack of necessities in context of unequal distribution of wealth in society is

دولت کی غیر مساوی تقسیم کے حوالے سے معاشرے میں ضروریات کی کمی _____ کہلاتی ہے۔

A.फसवणूक
A.Deprivation
A.محرومی

B.दारिद्र
B.Poverty
B.غریبی

C.सामाजिक तोटा
C.Social disadvantage
C.سماجی پسماندگی

D.यापैकी एकही नाही
D.None of these
D. ان میں سے کچھ نہیں

Answer: B.दारिद्र
B.Poverty
B.غریبی

86 निर्देश: पुढील प्रश्नांपैकी प्रत्येक प्रश्नात एक संख्या गहाळ आहे. मालिकेचा नमुना समजून घ्या आणि योग्य संख्या निवडा.
5, 7, 11, 19, 35, 67, ... , 259

DIRECTION: In each of the following questions, one number is missing in the series. You have to understand the pattern of the series and insert the number.

5, 7, 11, 19, 35, 67, ... , 259

ہدایت جیل کے ہر سوال میں سرج کا ایک نمبر گمشدہ ہے . آپکو اس سرج کو سمجھنا ہے. اور گمشدہ نمبر کو یہا کھوجنا ہے

5, 7, 11, 19, 35, 67, ... , 259

A.64
A.64
A.64

B.131
B.131
B.131

C.135
C.135
C.135

D.32
D.32
D.32

Answer: B.131
B.131
B.131

87 सूचना: दोन विधाने आणि त्यानंतर चार निष्कर्ष, I, II, III आणि IV दिले आहेत. ही विधाने सामान्यतः ज्ञात वस्तुस्थितीपेक्षा भिन्न असली तरी सत्य आहेत असे समजा. दिलेल्यापैकी कोणता निष्कर्ष दिलेल्या विधानांवरुन नक्की काढता येऊ शकतो हे तुम्ही ठरवायचे आहे.तुमचे उत्तर सूचित करा.
विधाने:
काही फाईल्सना क्रमांक दिले आहेत.
सर्व संख्यांना कोड दिलेले आहेत.

निष्कर्ष:

DIRECTION: Two statements are given following by four conclusions, I, II, III and IV. You have to consider that statements to be true, even if they seem to be at variance from commonly known facts. You are to decide which of the given conclusions can definitely be drawn from the given statements. Indicate your answer.

Statements:
Some files are numbered.
All numbers are coded.

Conclusions:

ہدایات: دو سٹیٹمنٹ جوکہ چار خلاصوں پر مشتمل ہیں .I،II، III اور IV. اپ کو وہ سٹیٹمنٹ درست ماننا ہے، اگرچہ دکہنے میں وہ بہت سارے حقاٰق ست مطبقت رکہتی ہو۔ اپ کو دیے گے خلاصوں میں سے یقینی طور پر اسے اختیار کرنا ہے جو سٹیٹمنٹ سے نکلا ہو. اپنا جواب تلاش کرے

اظہار بیان:
کچہ فایلیں نمبر شدہ ہیں
تمام نمبر علامت ہیں

حل:

A.सर्व फाईल्स कोडेड आहेत.
A.All files are coded
A.تمام فایلیں کوڈ شدہ ہیں

B.सर्व कोड्स फाईल केले आहेत.
B.All codes are filed
B.تمام کوڈ فایلیں ہیں

C.काही फाईल्सना क्रमांक दिले आहेत.
C.Some files are not numbered
C.کچہ فایلیں کوڈ شدہ نہیں ہیں

D.एकाही संख्येला कोड नाही
D.No numbers have codes
D.کوی نمبر کوڈ والا نہیں ہے

Answer: A.सर्व फाईल्स कोडेड आहेत.
A.All files are coded
A.تمام فایلیں کوڈ شدہ ہیں

88

प्रोटॉनचे ग्राममध्ये वजन आहे-

The weight in grams of proton is -

پروٹون کے گرام میں وزن ہے-

A.$1.67x10^{-24}$ जी
A.$1.67x10^{-24}$ g
A.$1.67x10^{-24}$ گرام

B.$1.67x10^{-28}$ जी
B.$1.67x10^{-28}$ g
B.$1.67x10^{-28}$ گرام

C.$1.69x10^{-23}$ जी
C.$1.69x10^{-23}$ g
C.$1.69x10^{-23}$ گرام

D.$1.71x10^{-21}$ जी
D.$1.71x10^{-21}$ g
D.$1.71x10^{-21}$ گرام

Answer:

A.$1.67x10^{-24}$ जी
A.$1.67x10^{-24}$ g
A.$1.67x10^{-24}$ گرام

89

जर $\frac{m}{n}=\frac{3}{4}$ आणि 16m +10n = 44, m चे मूल्य काढा.

If $\frac{m}{n}=\frac{3}{4}$ and 16m +10n = 44, find the value of m.

اگر $\frac{m}{n}=\frac{3}{4}$ اور 16m +10n = 44 تو m کی قیمت معلوم کریں۔

(A) $1\frac{1}{2}$

(B) $2\frac{1}{2}$

(C) $3\frac{1}{2}$

(D) $4\frac{1}{2}$

Answer: (A) $1\frac{1}{2}$

90 खालीलपैकी शिकण्याचे कोणते एक स्वरूप भाषा प्रयोगशाळेद्वारे प्राप्त केले जाऊ शकते

Which one of the following learning forms can be achieved through language laboratory?

زبان کی لیبارٹری کے ذریعہ سیکھنے کی درج ذیل شکلوں میں سے کون سا طریقہ حاصل کیا جا سکتا ہے؟

A.सांकेतिक, शृंखला, अनेक भेदभावयुक्त प्रक्रिया शिकणे
A.Signal, Chain, Multi discriminatory learning
A.سگنل، سلسلہ، ملٹی ڈسکریمیناٹری لرننگ

B.थेट, तात्विक आणि अनेक भेदभावयुक्त प्रक्रिया शिकणे
B.Direct, Principle and Multidiscriminatorv learning
B.براہ راست، پرنسپل اور ملٹی ڈسکریمیناٹرو لرننگ

C.सांकेतिक, थेट आणि तात्विक शिक्षण
C.Signal, Direct and Principle learning
C.سگنل، براہ راست اور اصول سیکھنا

D.शृंखला, तात्विक आणि अनेक भेदभावयुक्त प्रक्रिया शिकणे
D.Chain, Principle and Multidiscriminatory learning
D.تسلسل، اصول اور کثیر امتیازی تعلیمات

Answer: A.सांकेतिक, शृंखला, अनेक भेदभावयुक्त प्रक्रिया शिकणे
A.Signal, Chain, Multi discriminatory learning
A.سگنل، سلسلہ، ملٹی ڈسکریمیناٹری لرننگ

91 DIRECTIONS: A sentence with an underlined phrasal verb is given below. Out of the four options, choose the one which can be substituted for the given phrasal Verb.
The chimneys give off smoke.

A.hide

B.retain

C.emit

D.restrain

Answer: C.emit

92 सूचना: खालील प्रश्नांमध्ये दिलेल्या पर्यायांमधून संबंधित अक्षर/शब्द/संख्या निवडा.

5 : 125 :: 11 : ?

DIRECTIONS: In the following question, select the related letter/word/number from the given alternatives.

5 : 125 :: 11 : ?

سمت: مندرجہ ذیل سوال میں، دیے گئے متبادل سے متعلقہ حرف/لفظ/نمبر منتخب کریں۔

5 : 125 :: 11 : ?

A.121
A.121
A.121

B.1311
B.1311
B.1311

C.1321
C.1321
C.1321

D.1331
D.1331
D.1331

Answer: D.1331
D.1331
D.1331

93

प्रश्न चिन्हाच्या (?) जागी योग्य ठरणारी आकृती अंकांनी दर्शविलेल्या चार आकृतींमधून शोधून काढा.

Choose an appropriate figure from the four numbered figures for the place of the questions mark (?).

چار شکلوں میں سے، مناسب شکل کا انتخاب کرے اسے سوالی نشان کی جگہ رکھنے کے لئے

प्रश्न आकृत्या

Problem Figures

سوالی شکل

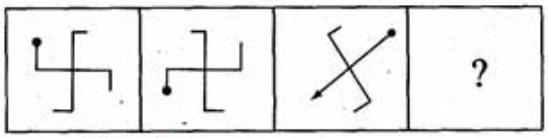

उत्तरासाठी पर्यायी आकृत्या

Answer Figure

جوابی شکل

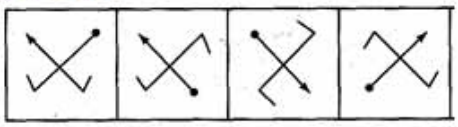

A. (A)

B. (B)

C. (C)

D. (D)

Answer: D. (D)

94

ओझोन थर अवशेषोशीत करते:

The ozone layer absorbs:

اوزون کی پرت جذب کرتی ہے:

A.अवरक्तविकिरण
A.Infrared radiation
A.زیریں سرخ تابکاری

B.अतीनीलविकिरण
B.Ultraviolet radiation
B.الٹراوائلیٹ تابکاری

C.क्ष- किरण
C.X-rays
C.ایکس- شعاعیں

D.वाई- किरण
D.Y-rays
D.وائی- شعاعیں

Answer: B.अतीनीलविकिरण
B.Ultraviolet radiation
B.الٹراوائلیٹ تابکاری

95 प्रकाशसंश्लेषण प्रक्रियेच्या वेळी हिरव्या वनस्पतींनी दिलेला वायू आहे:

The gas given out by green plants during process of photosynthesis is

فوٹو سنتھیسس کے عمل کے دوران سبز پودوں کے ذریعہ خارج کی گئی گیس کا نام ہے

A.कार्बन डाय ऑक्साइड
A.Carbon dioxide
A. کاربن ڈائی آکسائیڈ

B.नायट्रोजन
B.Nitrogen
B. نائٹروجن

C.ऑक्सिजन
C.Oxygen
C. آکسیجن

D.यापैकी एकही नाही
D.None of these
D. ان میں سے کوئی بھی نہیں

Answer: C.ऑक्सिजन
C.Oxygen
C. آکسیجن

96 निर्देश: खालील शब्दांची तार्किक क्रमाने मांडणी करा:

(i) जन्म
(ii) मृत्यू
(iii) अत्यंविधी
(iv) विवाह
(v) शिक्षण

DIRECTIONS: Arrange the following in a logical order:

(i) Birth
(ii) Death
(iii) Funeral
(iv) Marriage
(v) Education

ہدایات: ایک منطقی ترتیب میں
مندرجہ ذیل کو مرتب کریں:
(i) پیدائش
(ii) موت
(iii) جنازہ
(iv) شادی
(v) تعلیم

A.(iv), (v), (iii), (i), (ii)
A.(iv), (v), (iii), (i), (ii)
A.(iv), (v), (iii), (i), (ii)

B.(ii), (iii), (iv), (v), (i)
B.(ii), (iii), (iv), (v), (i)
B.(ii), (iii), (iv), (v), (i)

C.(i), (v), (iv), (ii), (iii)
C.(i), (v), (iv), (ii), (iii)
C.(i), (v), (iv), (ii), (iii)

D.(i), (iii), (iv), (v), (ii)
D.(i), (iii), (iv), (v), (ii)
D.(i), (iii), (iv), (v), (ii)

Answer: C.(i), (v), (iv), (ii), (iii)
C.(i), (v), (iv), (ii), (iii)
C.(i), (v), (iv), (ii), (iii)

For More Info And Videos About TAIT-Exam Syllabus And Other Exam Visit My Channel
BADSHAHimp SubScribe Like & Share WWW.YouTube/BADSHAHimp

97 सूचना: प्रत्येक प्रश्नाला एक प्रमुख विधानासोबत चार विधाने आहेत ज्यांच्याखाली A, B, C, आणि D असे चार विधान आहेत. क्रमवार विधानांची जोडी निवडा ज्यामध्ये प्रथम विधान दुसऱ्या विधानाला सुचवते, आणि दोन्ही विधाने तर्किकदृष्ट्या प्रमुख विधानासोबत निगडित असेल.

जेव्हा तुम्ही पैसे कमावता, तेव्हा कपड्यावर जास्त खर्च करता.
A. तुम्ही कमावत आहात
B. तुम्ही कमावत नाही
C. तुम्ही कपड्यावर जास्त खर्च करता.
D. तुम्ही कपड्यावर जास्त खर्च करत नाही.

DIRECTIONS: Each question has a main statement followed by four statements labelled A, B, C and D. Choose the ordered pair of statements, where the first statement implies the second, and the two statements are logically consistent with the main statement.

When you earn, you spend on clothes lavishly
A. you are earning
B. you are not earning
C. you are spending on clothes lavishly .
D. you are not spending on clothes lavishly .

ہدایت: ہر سوال میں ایک جملہ ہے جسکے بعد چار جملےاے، بی،سی اور ڈی کے نام سے دئے گئے ہیں اسمیں منسلک جوڑیوں کو چنئے۔ جہاں پہلا جملہ دوسرے جملہ کی اور اشارہ کر رہا ہے اور دو جملے منطقی مرکزی بیان کے مطابق ہیں

جب آپ کماتے ہیں تو کپڑوں پر دل کھول کر خرچ کرتے ہیں۔
Aآپ کما رہے ہیں ۔
Bآپ نہیں کما رہے ہیں ۔
Cآپ کپڑوں پر دل کھول کر خرچ کر رہے ہیں ۔
Dآپ کپڑوں پر دل کھول کر خرچ نہیں کر رہے ۔

A.AC
A.AC
A.AC

B.BA
B.BA
B.BA

C.DA
C.DA
C.DA

D.CD
D.CD
D.CD

Answer: A.AC
A.AC
A.AC

98	खालीलपैकी अशुद्ध वाक्य कोणते ?
	A.मी येत होतो.
	B.मी येणार होतो.
	C.मी येणारच होतो.
	D.मी नाही येणार होतो.
Answer:	D.मी नाही येणार होतो.

99	खालीलपैकी कोणते पेट्रोलियमचे मेण आहे? Which among the following is a petroleum wax? مندرجہ ذیل میں سے کون پٹرولیم موم ہے؟
	A.मधाचे मेण A.Honey Wax A.شہد موم
	B.पॅराफिनचे मेण B.Paraffin Wax B.پیرافینی موم
	C.जोजोबाचे मेण C.Jojoba Wax C.جوجوبا موم
	D.कार्नाउबाचे मेण D.Carnauba Wax D.کارنا باویکس موم
Answer:	B.पॅराफिनचे मेण B.Paraffin Wax B.پیرافینی موم

For More Info And Videos About TAIT-Exam Syllabus And Other Exam Visit My Channel
BADSHAHimp SubScribe Like & Share YouTube WWW.YouTube/BADSHAHimp

100	$(122)^{173}$ या गुणाकारामधील एकक स्थानचा अंक? The unit digit in the product $(122)^{173}$ is? حاصل ضرب $(122)^{173}$ میں یونٹ ہندسہ ہے؟
	A.2 A.2 A.2
	B.4 B.4 B.4
	C.3 C.3 C.3
	D.6 D.6 D.6
Answer:	A.2 A.2 A.2

101	वडील आणि मुलाच्या वयामधील गुणोत्तर 4:1 आहे. त्यांच्या वयांचा गुणाकार 1% आहे. 5 वर्षांनंतर त्यांच्या वयाचे गुणोत्तर काय असेल? The ratio between father and son's age is 4: 1. The product of their ages is 1%. What will be the ratio of their ages after 5 years? والد اور بیٹے کی عمروں کا تناسب 4:1ہے۔ اُن کی عمروں کا حاصل ضرب 1% ہے۔5 سال بعد اُن کی عمر وں کا تناسب کیا ہو گا؟
	A.11 : 4 A.11 : 4 A.11 : 4
	B.4 : 11 B.4 : 11 B.4 : 11
	C.5 : 12 C.5 : 12 C.5 : 12

For More Info And Videos About TAIT-Exam Syllabus And Other Exam Visit My Channel
BADSHAHimp SubScribe Like & Share YouTube WWW.YouTube/BADSHAHimp

D.12 : 5
D.12 : 5
D.12 : 5

Answer: A.11 : 4
A.11 : 4
A.11 : 4

102 खालील आकृतीमध्ये किती त्रिकोण आहेत?

How many triangles are there in the figure given below?

نیچے دی گئی شکل میں کتنے مثلث ہیں؟

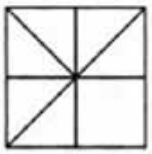

A. 8

B. 10

C. 12

D. 11

Answer: B. 10

103 जर नाणे तीन वेळा फेकले, तर छापा अचूकपणे दोन वेळा येईल अशा परिणामांची संख्या

If a coin is tossed three times, then the number of outcomes in which heads occurs exactly two times is

اگر ایک سکہ تین بار اچھالا جائے تو ممکنہ نتائج جن میں ہیڈ کا دو بار آنا یقینی ہے

A.2
A.2
A.2

B.3
B.3
B.3

C.1
C.1
C.1

D.6
D.6
D.6

Answer: B.3
B.3
B.3

104 DIRECTIONS: A sentence with an underlined word is given below. Find the word which is opposite in meaning to the underlined word from the given options.
The new ramp will facilitate the entry of wheelchairs.

A.Hinder

B.Improve

C.Encourage

D.Increase

Answer: A.Hinder

105 सूचना: प्रश्नांची उत्तरे देण्यासाठी माहितीचा काळजीपूर्वक अभ्यास करा.
T, U, V, W, X,Y आणि Z हे सात लोक उत्तरेकडे तोंड करुन एका सरळ रेषेत बसलेले आहेत, पण ते याच क्रमाने बसलेले आहेत असे नाही. T हा W च्या डाव्या बाजूला पाचव्या जागेवर बसतो, जो कुठल्याही अंतिम टोकावर बसलेला नाही. दोन लोक Z आणि X यांच्या मध्ये बसतात. Y हा U च्या डाव्या बाजूला तिसऱ्या जागेवर बसतो. Y बरोबर मध्यभागी बसतो.
Z हा Y चा तत्काळ शेजारी नाही.
T च्या उजवीकडून दुसरा कोण आहे?

DIRECTIONS: Study the information carefully to answer the questions.
Seven friends T, U, V, W, X,Y and Z are sitting in a straight line facing North. T sits fifth to the left of W, who does not sit at any of extreme ends. Two people sit between Z and X. Y sits third to the left of U. Y sits exactly in the middle.
Z is not an immediate neighbour of Y.
Who is second to the right of T?

ہدایات: سوالوں کے جواب دینے کے لیے معلومات کو دھیان سے پڑھیں۔
سات دوست T، U، V، W، X، Y اور Z شمال کا رخ کیے ہوئے ایک سیدھی لائن میں بیٹھے ہیں۔ T، W کے بائیں سے پانچویں پر بیٹھا ہے، جو کہ کسی بھی انتہائی سرے پر نہیں بیٹھا ہے۔ Z اور X کے درمیان دو لوگ بیٹھے ہیں۔ Y، U کے بائیں سے تیسرے پر بیٹھا ہے۔ Z، Y ٹھیک درمیان میں بیٹھا ہے۔ Y کا فوری پڑوسی نہیں ہے۔
T کے دائیں طرف سے دوسرا کون ہے؟

For More Info And Videos About TAIT-Exam Syllabus And Other Exam Visit My Channel
BADSHAHimp SubScribe Like & Share YouTube WWW.YouTube/BADSHAHimp

A.Y
A.Y
A.Y

B.X
B.X
B.X

C.U
C.U
C.U

D.V
D.V
D.V

Answer: D.V
D.V
D.V

106 खालीलपैकी शुद्ध वाक्य कोणते ?

A.पोराने आईवडिलांना लाज राखली.

B.पोराने आईवडिलांची लाज राखली.

C.पोराने आईवडिलांकडे लाज राखली.

D.पोराने आईवडिलांपासून लाज राखली.

Answer: B.पोराने आईवडिलांची लाज राखली.

107 वैद्यकीय मानसशास्त्रज्ञांचे पूर्वीचे मुख्य काम हे होते

Predominant work of early clinical psychologists was to

غلبہ سے پہلےابتدائی کلینیکل ماہرنفسیات کا کا کام تھا

A.सैन्यात भरती होणाऱ्याच्या बुद्धिमत्तेचे मुल्यांकन
A.Assess the intelligence of army recruits
A.فوجی بھرتی میں ذہانت کی تشخیص

B.मोठा विस्फोट उपचार
B.Treat shell shock
B.شیل کے جھٹکا کاعلاج

C.मुलांमधील अध्ययनाच्या अडचणींचे मूळ शोधा
C.Identify the origins of learning difficulties in children
C.بچوں میں سیکھنے کی دشواری کی اصل وجہ کی شناخت

D.वरीलपैकी सर्व
D.All of the above
D.درج بالا سبھی

Answer:
D.वरीलपैकी सर्व
D.All of the above
D.درج بالا سبھی

108

3, 4, 5, 6 व अ ची सरासरी 5 आहे. अ चे मूल्य शोधा.

The average of 3, 4, 5, 6 and a is 5. Then find the value of a.

3,4,5,6 اور A کا اوسط 5ہے۔ A کا مان ہوگا۔

A.9
A.9
A.9

B.5
B.5
B.5

C.8
C.8
C.8

D.7
D.7
D.7

Answer:
D.7
D.7
D.7

109 सूचना: खालील प्रश्नांमध्ये दिलेल्या पर्यायांमधून संबंधित अक्षर समूह निवडा.

CDFK : XWUP: : PQSX:?

DIRECTIONS: In the following question, select the related group of letters from the given alternatives.

CDFK : XWUP: : PQSX:?

سمت: مندرجہ ذیل سوال میں، دیے گئے متبادل میں سے حروف کا متعلقہ گروپ منتخب کریں۔

CDFK : XWUP: : PQSX:?

A.KLGC
A.KLGC
A.KLGC

B.KJHC
B.KJHC
B.KJHC

C.JLGC
C.JLGC
C.JLGC

D.KHIC
D.KHIC
D.KHIC

Answer: B.KJHC
B.KJHC
B.KJHC

110 खालीलपैकी कोणते शिक्षकाने करणे अपेक्षित नाही?

Which of the following is the teacher not expected to do?

مندرجہ ذیل میں سے کس کی ایک استاد سے توقع نہیں کی جا سکتی؟

A.सामुदायिक गतिविधींमध्ये भाग घेणे जसे रेड क्रॉस
A.Participate in community activities such as Red Cross
A.ریڈ کراس جیسی کمیونٹی کی سرگرمیوں میں حصہ لیں

B.विद्यार्थ्यांना त्यांच्या वैयक्तिक आणि शाळेच्या समस्यांमध्ये मदत करणे
B.Give help to pupils in their personal and school-problems
B.طلباء کو اپنے ذاتی اور اسکول کے مسائل میں مدد دیں

C.विद्यार्थ्यांची उपस्थिती आणि यशाचे रेकॉर्ड ठेवणे
C.Keep pupil's attendance and achievement records
C.طالب علم کی حاضری اور کامیابی کا ریکارڈ رکھیں

D.वरीलपैकी कोणतेही नाही
D.None of the above.
D.اوپر میں سے کوئی نہیں

Answer:
D.वरीलपैकी कोणतेही नाही
D.None of the above.
D.اوپر میں سے کوئی نہیں

111 जर एकरेषीय जोडीमधील एक कोन लघु असेल, तर दुसरा कोन काय असेल:

If one angle of a linear pair is acute, then its other angle will be:

اگر لینئر جوڑی کا ایک زاویہ ایکیوٹ ہے تو اس کا دوسرا زاویہ ہوگا:

A.लघु
A.Acute
A.ایکیوٹ (Acute)

B.विशाल
B.Obtuse
B.اوبٹیوس (Obtuse)

C.काटकोन
C.Right angle
C.دایاں زاویہ

D.यांपैकी कोणतेही नाही
D.None of these
D.کوئی نہیں

Answer:
B.विशाल
B.Obtuse
B.اوبٹیوس (Obtuse)

112 इतर व्यवसायांबरोबर तुलना केल्यास, शिकवण्यामध्ये सर्वात मोठी कमतरता म्हणजे

As compared with other professions, the greatest lack in teaching is—

دوسرے کاروباروں کے مقابلے میں، تعلیم میں سب سے بڑی کمی-- ہے-

A.अनुज्ञेयता मानक
A.Licensing standard
A.معیار کی لائسنسنگ

B.प्रशिक्षण कार्यक्रम
B.Training programs
B.تربیتی پروگرام

C.उचित वेतन प्रमाण
C.Adequate salary scales
C.کافی تنخواہ کا ترازو

D.योग्य सामाजिक रूपरेखा
D.Proper social outlook
D.مناسب سماجی نقطہ نظر

Answer: C.उचित वेतन प्रमाण
C.Adequate salary scales
C.کافی تنخواہ کا ترازو

113 जर आपण भीमबेटका या प्रसिद्ध ठिकाणी पर्यटन करत आहोत, तर आपण कोणत्या राज्यामध्ये आहोत –

If we are touring the famous site of Bhimbetka, we are in the state of –

اگر ہم بھیم بیٹکا کی مشہور سائٹ پر سیاحت کررہے ہیں، تو ہم _____ ریاست میں ہیں

A.उत्तर प्रदेश
A.Uttar Pradesh
A.اتر پردیش

B.मध्य प्रदेश
B.Madhya Pradesh
B.مدھیہ پردیش

C.हरियाणा
C.Haryana
C.ہریانہ

D.छत्तीसगढ
D.Chhattisgarh
D.چھتیس گڑھ

Answer: B.मध्य प्रदेश
B.Madhya Pradesh
B.مدھیہ پردیش

114

रू. 6800 (रूपयांमध्ये) चे दोन भागांमध्ये विभाजन करा ज्यामुळे $3\frac{1}{3}$ वर्षांमध्ये पहिल्या भागावरील 6% दराने असलेले सरळ व्याज हे दुसऱ्या भागावरील 4% प्रति वर्ष दराने $3\frac{1}{2}$ वर्षांसाठीच्या व्याजाएवढे असेल?

Divide Rs.6800 (in Rs.) into two part so that S.I. on the first part for $3\frac{1}{3}$ years at 6% will be equal to the interest on the second part for $3\frac{1}{2}$ years at 4% p.a.

6800 روپیہ کو دو حصوں میں تقسیم کریں تاکہ 6% کی در سے پہلے حصے کا سود مفرد $3\frac{1}{3}$ سال کے لیئے دوسرے حصے کے 4% سالانہ کی در سے $3\frac{1}{3}$ سال کے لیئے منافعہ کے برابر ہو

A. 2600, 4200

B. 2800, 4000

C. 2500, 4300

D. 2700, 4100

Answer: B. 2800, 4000

115

दोन किंवा त्यापेक्षा जास्त व्यक्तींची आयोजित संस्था जे संवाद साधतात आणि जे स्वतंत्र आहेत आणि त्यांचे समान उद्देश्य आहेत त्यांना_____ असे म्हणतात.

Organized system of two or more individuals who are interacting and independent who have common motives is called as a

دو یا زیادہ سے زیادہ افراد کی منظم نظام جو منسلک اور آزاد ہیں وہ جو عام مقاصد کا حامل ہیں وہ ایک کے طور پر کہا جاتا ہے

A.गट
A.Group
A.گروپ

B.गोंधळ
B.Gaggle
B.گنگل

C.जमावटोळी
C.Mob
C.موبا

D.श्रोते
D.Audience
D.آڈیٹر

Answer: A.गट
A.Group
A.گروپ

116 आपल्या शरीरात सर्वात सहजपणे बनविलेले जीवनसत्व आहे-

The vitamin that is most readily manufactured in our bodies is

وہ وٹامن جو ہمارے اجسام میں سب سے زیادہ تیار رہتا ہے

A.ए जीवनसत्त्व
A.Vitamin A
A.وٹامن اے

B.बी जीवनसत्त्व
B.Vitamin B
B.وٹامن بی

C.सी जीवनसत्त्व
C.Vitamin C
C.وٹامن سی

D.डी जीवनसत्त्व
D.Vitamin D
D.وٹامن ڈی

Answer: D.डी जीवनसत्त्व
D.Vitamin D
D.وٹامن ڈی

117 कारने तिच्या सामान्य गतीपेक्षा ती 5/7 ने प्रवास करून 1 तास 40 मिनिटे आणि 28 सेकंदांमध्ये 42 किमी अंतर कापले. कारची सामान्य गती काढा?

A car travelling at 5/6 of its normal speed covers 42 km in 1 hour 40 minutes 48 second. Find the normal speed of the car?

ایک کار اپنی عام رفتار کے 5/7 حصے پر چلتے ہوئے42 کلومیٹر میں 1 گھنٹہ 40 منٹ اور 48 سیکنڈ میں طے کرتی ہے۔ گاڑی کی عمومی رفتار معلوم کریں؟

A.17 किमी/तास
A.17 km/hr
A.17 کلومیٹر / گھنٹہ

B.25 किमी/तास
B.25 km/hr
B.25 کلومیٹر / گھنٹہ

C.35 किमी/तास
C.35 km/hr
C.35 کلومیٹر / گھنٹہ

D.30 किमी/तास
D.30 km/hr
D.30 کلومیٹر / گھنٹہ

Answer: B.25 किमी/तास
B.25 km/hr
B.25 کلومیٹر / گھنٹہ

118 अंतिम विश्लेषणामध्ये, शिकवणे हे मुख्यतः — ची प्रक्रिया म्हणून विचार केला गेला पाहीजे

In the final analysis, teaching must be thought of mainly as a process of—

حتمی تجزیہ میں، تعلیم کو لازما بنیادی طور پر ایک عمل کے طور پر سمجھنا ضروری ہے-

A.लोकांच्या गतिविधींना मार्गदर्शन करणे
A.Directing the activities of people
A.لوگوں کو سرگرمیوں کی ہدایت

B.प्रश्न विचारणे आणि उत्तरांचे मूल्यमापन करणे
B.Asking questions and appraising answers
B.سوالات پوچھنا اور جوابات کی توثیق کرنا

C.विद्यार्थ्यांनी केलेले पठण ऐकणे
C.Hearing the recitation of pupils
C.طلباء کی پڑھائی سنتے ہوئے

D.प्रौढ कल्पनांविषयी विद्यार्थ्यांना शिकवण देणे
D.Indoctrinating pupils with adult ideas
D.طالب علموں کو بالغ خیالات کے ساتھ متعارف کرانا

Answer: A.लोकांच्या गतिविधींना मार्गदर्शन करणे
A.Directing the activities of people
A.لوگوں کو سرگرمیوں کی ہدایت

119 ‘कृश’ या शब्दाचा समानार्थी शब्द कोणता ?

A.काळा

B.शेतकरी

C.गवत

D.सडसडीत

Answer: D.सडसडीत

120 $x^2+5x+6=0$ या वर्गसमीकरणाची मुळे आहेत:

The roots of the quadratic equation $x^2+5x+6=0$ are:

$x^2+5x+6=0$ مربع مساوات کے روٹ ہیں:/

A.2, 1
A.2, 1
A.2, 1

B.-3,-2
B.-3,-2
B.-3,-2

C.-5,-7
C.-5,-7
C.-5,-7

D.-4,-8
D.-4,-8
D.-4,-8

Answer: B.-3,-2
B.-3,-2
B.-3,-2

121 खालीलपैकी एक धोकादायक टाकऊ आहे जे घरामध्ये तयार होते -

One of the following is a hazardous waste that is generated in the house -

مندرجہ ذیل میں سے مہلک کچرا جو کی گھروں میں رہتا ہے

A.कागद
A.Paper
A. کاغذ

B.उरलेले अन्न
B.Leftover foodstuff
B. بچے کھچے کھانے کی اشیاء

C.जुने बॅटरी
C.Old batteries
C. پرانی بیٹریاں

D.प्लॅस्टिक पिशव्या
D.Plastic bags
D. پلاسٹک بیگ

Answer: C.जुने बॅटरी
C.Old batteries
C. پرانی بیٹریاں

122 ‘तुमच्यामुळे आमचा आनंद द्विगुणीत झाला.’ या वाक्यातील विशेषण ओळखा.

A.तुमच्यामुळे

B.आमचा

C.आनंद

D.द्विगुणीत

Answer: D.द्विगुणीत

123 खालीलपैकी कोणती समस्या आवाज प्रदूषणाद्वारे निर्माण केली जात नाही?

Which of the following problems is not created by noise pollution?

مندرجہ ذیل مسائل میں سے شور کی آلودگی کی وجہ سے پیدا نہیں ہوتا؟

A.अतिसार
A.Diarrhoea
A.اسہال

B.उच्चरक्तदाब
B.Hypertension
B. ہائی بلڈ پریشر

C.बहिरेपणा
C.Deafness
C. بہرا پن

D.चीड
D.Irritation
D. جلن

Answer: A.अतिसार
A.Diarrhoea
A.اسہال

124 कोणत्या संघाने आयसीसी मेन्स चॅम्पियन ट्रॉफी २०१७ जिंकली?

Which team won the ICC Men’s Champion Trophy 2017?

کس ٹیم نے آئی سی سی مینس چمپیئن ٹرافی 2017 کو جیتا تھا؟

A.भारत
A.India
A.ہندوستان

B.पाकिस्तान
B.Pakistan
B.پاکستان

C.ऑस्ट्रेलिया
C.Australia
C. آسٹریلیا

D.वेस्ट इंडिज
D.West Indies
D.ویسٹ انڈیز

Answer: B.पाकिस्तान
B.Pakistan
B.پاکستان

125 1.11.93 हा पहिला सोमवार आहे. नोव्हेंबर 1993 चा 4था शुक्रवार कोणता असेल?

1.11.93 is First Monday. Which is the 4th Friday of November 1993?

1-11- کو پہلا پیر ہے۔ نومبر 1993 کا چوتھا جمعہ کونسا ہے؟93

A.26-11-93
A.26-11-93
A.199326-11-

B.24-11-93
B.24-11-93
B.199324-11-

C.25-11-93
C.25-11-93
C.199325-11-

D.27-11-93
D.27-11-93
D.199327-11-

Answer: A.26-11-93
A.26-11-93
A.199326-11-

126 पाणी उकळण्याची बिंदू काय आहे?

What is the boiling point of water?

پانی کس درجۂ حرارت پر ابلتا ہے؟

A.0 डिग्री सेल्सियस
A.0 degree Celsius
A.0° C

B.100 डिग्री सेल्सियस
B.100 degrees Celsius
B.100° C

C.10 डिग्री सेल्सियस
C.10 degrees Celsius
C.10° C

D.वरीलपैकी एकही नाही
D.None of the above
D. مندرجہ بالا میں سے کوئی نہیں

Answer: B.100 डिग्री सेल्सियस
B.100 degrees Celsius
B.100° C

127 एक मानसिक चाचणी ज्यामध्ये प्रत्येकास सर्व वस्तूंचा प्रयत्न करण्यासाठी पुरेशी वेळ मर्यादा असते त्याला _____असे म्हटले जाते.

A Psychological test that has a time limit long enough for everyone to attempt all items is called as

:وہ نفسیاتی ٹسٹ جس میں ہر ایک کیلیے طے شدہ وقت اتنا ہوتا ہے جو تمام چیزوں کی کوشش کرنے کیلیے کافی ہو، کہلاتا ہے

A.गती चाचणी
A.Speed test
A. اسپیڈ ٹسٹ

B.लेखी चाचणी
B.Non-verbal test
B.غیر زبانی ٹسٹ

C.सामर्थ्याची चाचणी
C.Power test
C.پاور ٹسٹ

D.घाईची चाचणी
D.Rush test
D.رش (تیز رفتار) ٹسٹ

Answer: C.सामर्थ्याची चाचणी
C.Power test
C.پاور ٹسٹ

128 सूचना: प्रत्येक प्रश्नाला एक प्रमुख विधानासोबत चार विधाने आहेत ज्यांच्याखाली A, B, C, आणि D असे चार विधान आहेत. क्रमवार विधानांची जोडी निवडा ज्यामध्ये प्रथम विधान दुसऱ्या विधानाला सुचवते, आणि दोन्ही विधाने तर्किकदृष्ट्या प्रमुख विधानासोबत निगडित असेल.

तो एकतर श्रीमंत आहे किंवा कंगाल आहे.
A. तो श्रीमंत आहे.
B. तो श्रीमंत नाही.
C. तो कंगाल आहे.
D. तो कंगाल नाही.

DIRECTIONS: Each question has a main statement followed by four statements labelled A, B, C and D. Choose the ordered pair of statements, where the first statement implies the second, and the two statements are logically consistent with the main statement.

He is either rich or penniless
A. He is rich
B. He is not rich
C. He is penniless
D. He is not penniless

ہدایت: ہر سوال میں ایک جملہ ہے جسکے بعد چار جملےاے، بی،سی اور ڈی کے نام سے دئے گئے ہیں اسمیں منسلک جوڑیوں کو چنئے۔ جہاں پہلا جملہ دوسرے جملہ کی اور اشارہ کر رہا ہے اور دو جملے منطقی مرکزی بیان کے مطابق ہیں

وہ یا تو امیر ہے یا کنگال
A۔ وہ امیر ہے
B۔ وہ امیر نہیں ہے
C۔ وہ کنگال ہے
D۔ وہ کنگال نہیں ہے

A.AC
A.AC
A.AC

B.DA
B.DA
B.DA

C.CB
C.CB
C.CB

D.AB
D.AB
D.AB

Answer: B.DA
B.DA
B.DA

129

सूचना: दिलेल्या पर्यायांमधून श्रेणी पूर्ण करणारी योग्य आकृती निवडा.

DIRECTIONS: Complete the series by choosing right figure from the given choices.

ہدایات: دیئے گئے اختیارات میں صحیح شکل کا انتخاب کر کے سیریز کو مکمل کیجیئے۔

प्रश्न आकृत्या
Question Figures
سوالی شکل

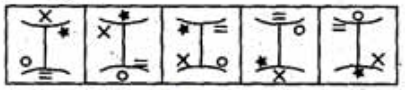

उत्तरासाठी पर्यायी आकृत्या
Answer Figures
جوابی شکل

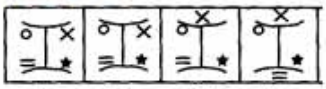

A. (A)

B. (B)

C. (C)

D. (D)

Answer: A. (A)

130

सूचना: दिलेल्या चारांपैकी वेगळी (असंबद्ध) असणारी आकृती शोधून काढा.

DIRECTIONS: Find the odd from the given four figures.

ہدایات: دی گئی چار شکلوں میں طاق کونسی ہیں۔

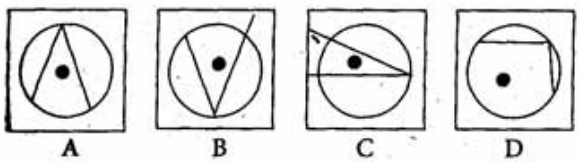

A. (A)

B. (B)

C. (C)

D. (D)

Answer: D. (D)

131 $\sqrt[3]{125} = (25)^{?}$

A. 1/4

B. 1/2

C. 1/8

D. 2

Answer: B. 1/2

132 Out of the given options, choose the one which is the correct indirect speech of the sentence given below.
The grandmother said to her grandsons, “Did you not like my story yesterday?”

A.The grandmother asked her grandsons if they did not like her story yesterday.

B.The grandmother asks her grandsons if they did not liked her story the day before.

C.The grandmother asked her grandsons if they had not liked her story the day before.

D.The grandmother asks her grandsons if they have not been liking her story the day before.

Answer: C.The grandmother asked her grandsons if they had not liked her story the day before.

133 सर्वात मोठा निकष, ज्याच्या आधारावर शिकवणे हा एक व्यवसाय आहे की नाही हे तपासणे, तो म्हणजे शिक्षकाचे

The most valid criterion, on the basis of which to judge whether teaching is a profession, is the teacher’s —-

- سب سے زیادہ درست معیار، جس کے مطابق یہ فیصلہ کرنا چاہیئے کہ تدریس ایک پیشہ ہے، وہ استاد کا --- ہے

A.मुलांविषयी प्रेम
A.Love for children
A.بچوں کے لئے محبت

B.विषयवस्तुचे विस्तृत आणि संपूर्ण ज्ञान
B.Broad and thorough knowledge of subject matter
B.موضوع کا وسیع اور مکمل علم

C.आपल्या संस्कृतीमधील प्रबळ मूल्यांचे उदाहरण
C.Exemplification of dominant values of our culture
C.ہماری ثقافت کی اہم اقدار کی مثالیں

D.व्यावसायिक नितीमूल्यांचे पालन
D.Observance of professional ethics
D.پیشہ ور اخلاقیات کا مشاہدہ

Answer: D.व्यावसायिक नितीमूल्यांचे पालन
D.Observance of professional ethics
D.پیشہ ور اخلاقیات کا مشاہدہ

134 निर्देश: दिलेल्या अंक मालिकेतील चुकीची संज्ञा शोधा:

1, 2, 12, 63, 316, 1704, 10446

DIRECTIONS: Find the wrong term in the given number series:

1, 2, 12, 63, 316, 1704, 10446

ہدایت دے گئے نمبرس سرج مے غلط نمبر کھوجے

1, 2, 12, 63, 316, 1704, 10446

A.1704
A.1704
A.1704

B.316
B.316
B.316

C.63
C.63
C.63

D.12
D.12
D.12

Answer: A.1704
A.1704
A.1704

135 सूचना : खालील प्रत्येक प्रश्नात दोन विधाने I आणि II दिलेले आहेत. हे विधान एकतर स्वतंत्र कारण असू शकतात किंवा स्वतंत्र कारणांचे परिणाम असू शकतात. यांपैकी एक विधान इतर विधानाचा परिणाम असू शकतो. दोन्ही विधाने वाचा आणि खालीलपैकी कोणत्या उत्तराचा पर्याय या दोन्ही विधानांमधील संबंधांचे वर्णन करतो ते ठरवा.

विधान :
I. शासकीय नोकऱ्यांसाठी सरकारने संगणकाचे ज्ञान अनिवार्य केले आहे.
II. शाळांमध्ये संगणकाच्या शिक्षणाची सक्ती केली जात आहे.

DIRECTIONS: Below in each question are given two statements I and II. These statements may be either independent causes or may be effects of independent causes. One of these statements may be the effect of the other statement. Read both the statements and decide which of the following answer choice correctly depicts the relationship between these two statements.

Statements:
I. Government has made computer knowledge compulsory for government jobs.
II. Computer education is being made compulsory in schools.

ہدایات: نیچے ہر سوال میں دو بیانات I اور II آزاد وجوہات یا پھر آزاد وجوہات کے اثرات ہو سکتے ہیں۔ ان دیے گئے ہیں۔ یہ بیانات یا تو بیانات میں سے ایک بیان دوسرے کا اثر ہو سکتا ہے۔دونوں بیانات پڑھیں اور فیصلہ کریں کہ نیچے دیے گئے کس جواب کا انتخاب ان دونوں بیانات کے در میان تعلق کو ٹھیک سے ظاہر کرتا ہے۔

بیانات:
I – حکومت نے گورنمنٹ جابز کے لیے کمپیوٹر نالج لازمی قرار دے دیا ہے۔
II - اسکولوں میں کمپیوٹر کی تعلیم لازمی بنائی جا رہی ہے۔

A.I हा परिणाम आहे आणि II हे त्याचे तात्काळ आणि प्रमुख कारण आहे;
A.I is effect and II is its immediate and principal cause;
A. بیان نمبر I اس کی فوری اور بنیادی وجہ ہے۔ II اثر ہے اور بیان نمبر

B.I हे तात्काळ आणि प्रमुख कारण आहे आणि II हा त्याचा परिणाम आहे;
B.I is the immediate and principal cause and II its effect;
B. بیان نمبر I اس کا اثر ہے۔ II فوری اور بنیادی وجہ ہے اور بیان نمبر

C.I हा परिणाम आहे परंतु II हे त्याचे तात्काळ आणि प्रमुख कारण नाही;
C.I is an effect but II is not its immediate and principal cause;
C. بیان نمبر I اس کی فوری اور بنیادی وجہ نہیں ہے۔ II اثر ہے لیکن بیان نمبر

D.II हा परिणाम आहे परंतु I हे त्याचे तात्काळ आणि प्रमुख कारण नाही;
D.II is an effect but I is not its immediate and principal cause;
D. بیان نمبر II اس کی فوری اور بنیادی وجہ نہیں ہے۔ I اثر ہے لیکن بیان نمبر

Answer: B.I हे तात्काळ आणि प्रमुख कारण आहे आणि II हा त्याचा परिणाम आहे;
B.I is the immediate and principal cause and II its effect;
B. بیان نمبر I اس کا اثر ہے۔ II فوری اور بنیادی وجہ ہے اور بیان نمبر

136 श्रवण सहायतांमध्ये — चा समावेश होतो

The audio aids include—

-آڈیو امداد شامل ہیں

A.रेडिओ आणि टेप रेकॉर्डर
A.Radio and tape recorder
A.ریڈیو اور ٹیپ ریکارڈر

B.टेलिव्हिजन आणि व्हीसीआर
B.Television and VCR
B.ٹیلی ویژن اور وی سی آر

C.चित्रपट आणि स्लाइड्स
C.Film and slides
C.فلم اور سلائڈ

D.वरीलपैकी कोणतेही नाही
D.None of the above
D.اوپر سے کوئی بھی نہیں

Answer:

A.रेडिओ आणि टेप रेकॉर्डर
A.Radio and tape recorder
A.ریڈیو اور ٹیپ ریکارڈر

137 निर्देश: खाली दिलेले प्रश्न वर्ण मालिकेवर आधारित आहेत. या प्रत्येक मालिकेत, काही अक्षरे गहाळ आहेत. योग्य पर्याय निवडा पाच पेक्षा अधिक अक्षरे गहाळ असल्यास, मालिकेतील शेवटचे पाच अक्षरे निवडा .

pq - st - - rs - pq - - - - -

DIRECTION: Questions given below are based on the letter series. In each of these series, some letters are missing. Select the correct alternative. If more than five letters are missing, select the last five letters of the series:

pq - st - - rs - pq - - - - -

ہدایت نیچے دے ہے سوالات حرف سرج پر مشتمل ہیں . ہر میں کہیں حرف گمشدہ ہے . سہی اختیارات کو چنے . اگر پچ حرف گنمام ہو تو آخری پانچ حرفونکو چنے

pq - st - - rs - pq - - - - -

A.rstqp
A.rstqp
A.rstqp

B.tsrqp
B.tsrqp
B.tsrqp

C.rstpq
C.rstpq
C.rstpq

D.rtspq
D.rtspq
D.rtspq

Answer: C.rstpq
C.rstpq
C.rstpq

138 सूचना: अर्थपूर्ण परिच्छेद निर्माण करण्यासाठी, खाली दिलेली (P), (Q) (R), (S) आणि (T) ही पाच वाक्ये योग्य अनुक्रमाने पुनर्रचना करा; त्यांनतर खालील प्रश्नांची उत्तर द्या. P. लोकांचे संरक्षण करण्यासाठी भगवान श्रीकृष्णाने एका बोटाने गोवर्धन पर्वत उचलून धरला.
Q. त्यामुळे इंद्र देव खूप रागवला आणि त्याने वृंदावनवर वादळ सोडले.
R. इंद्र देवाला त्याची चूक कळून चुकली आणि त्याने श्रीकृष्णाकडे माफी मागितली.
S. वेळेवर पाऊस व्हावा यासाठी वृन्दावनमधील जनता दरवर्षी इंद्र देवाची पूजा करीत असे.
T. पण एके वर्षी, गोवर्धन पर्वताची पूजा करण्यास श्रीकृष्णाने लोकांना सुचविले.

पुनर्रचना केल्यानंतर खालीलपैकी कोणते वाक्य तिसरे असेल?

DIRECTION: Rearrange the following five sentences (P), (Q), (R), (S) and (T) in the proper sequence to form a meaningful paragraph; then answer the questions given below them.
P. To protect the people Lord Krishna picked up the Govardhan hill on a single finger.
Q. This made Lord Indra very angry and he sent a storm to Vrindavan.
R. Lord Indra soon realized his mistake and apologized to Krishna.
S. People of Vrindavan used to worship Lord Indra for timely rains every year.
T. One year, Shri Krishna suggested that people should rather worship the Govardhan hill.

Which of the following should be the THIRD sentence after rearrangement?

ہدایات: ان پانچ جملوں (P)، (Q)، (R)، (S) اور (T) کو با معنی پیرا بنانے کے لئے دوبارہ ترتیب دیجئے، پھر نیچے دے گئے سوالوں کے جواب دیجئے

P. لوگوں کو بچانے کے لئے دیوتا کرشنا نے گووردن پہاڈ اپنی انگلی پر اٹھایا.
Q. اسنے دیوتا اندرا کو گسسا دلایا اور اسنے ورنداون میں آندھی بیجھ دی.
R. دیوتا اندرا کو جلدی اپنی گلتی کا احساس ہوا اور کرشنا سے معافی مانگی.
S. ورنداون کے لوگ ہر سال وقت پی بارش ہونے کے لئے دیوتا اندرا کی عبادت کرتے تھے.
T. ایک سال، شری کرشنا نے صلاح دی کہ لوگوں کو گووردن پہاڈ کی عبادت کرنی چاہیے.

دوبارہ ترییب دینے کے بعد کون سا جملہ تیسرا ہونا چاہیے؟

A.Q
A.Q
A.Q

B.P
B.P
B.P

C.R
C.R
C.R

D.S
D.S
D.S

Answer: A.Q
A.Q
A.Q

139 खालीलपैकी शुद्ध शब्द कोणता ?

A.निशस्त्र

B.निशस्र

C.नि:शस्त्र

D.नि:शस्र

Answer: C.नि:शस्त्र

140 $\frac{(3-4)^2+(3+4)^2}{3\times 3+4\times 4}=?$

A. 4.485

B. 2.589

C. 4

D. 2

Answer: D. 2

141	खालीलपैकी स्त्रीलिंगी शब्द ओळखा.
	A.वीट
	B.माती
	C.भिंत
	D.वरील सर्व
Answer:	D.वरील सर्व

142	BT कापूस आहे BT cotton is کاٹن BT ہے
	A.एक संकरित वनस्पती A.A hybrid plant A. ایک ہائبرڈ پلانٹ
	B.एक परिवर्तीत वनस्पती B.A transgenic plant B. ایک ٹرانسجینک پلانٹ
	C.एक नैसर्गिक वनस्पती C.A natural plant C. ایک قدرتی پلانٹ
	D.औषधी वनस्पती D.A medicinal plant D. ایک میڈیسینل پلانٹ
Answer:	B.एक परिवर्तीत वनस्पती B.A transgenic plant B. ایک ٹرانسجینک پلانٹ

143	सूचना: दिलेल्या पर्यायांमधून वेगळे ते बाहेर काढा. DIRECTIONS: Find the odd one out from the given alternatives. سمت: دیے گئے متبادل میں سے بے جوڑ کو تلاش کرو۔

A.YCAEC
A.YCAEC
A.YCAEC

B.KOMQO
B.KOMQO
B.KOMQO

C.PTRUT
C.PTRUT
C.PTRUT

D.GKIMK
D.GKIMK
D.GKIMK

Answer: C.PTRUT
C.PTRUT
C.PTRUT

144 वायुयानामध्ये अनुभवलेली वजनरहित अवस्था ह्याच्यामुळे आहे:

Weightlessness experienced in spaceship is due to:

خلائی جہاز میں بے وزنی کا احساس ہوتا ہے کیونکہ:

A.जडत्वाची अनुपस्थिती
A.Absence of inertia
A.جمود کی غیر موجودگی

B.गुरुत्वाची अनुपस्थिती
B.Absence of gravity
B.قوت ثقل کی غیر موجودگی

C.वाढत्या बळाची अनुपस्थिती
C.Absence of accelerating force
C.رفتار کی قوت کی غیر موجودگی

D.वायुयानाचा मुक्तपणे पडणे
D.Free fall of the spaceship
D.خلائی جہاز کا گرنے سے آزاد ہونا

Answer: B.गुरुत्वाची अनुपस्थिती
B.Absence of gravity
B.قوت ثقل کی غیر موجودگی

145	संगणकावरील माहिती अशी म्हणून संग्रहित होते- Information on a computer is stored as - کمپیوٹر پر معلومات اسٹور کیا جاتا ہے بطور-
	A.एनालॉग डेटा A.Analog Data A.اینالاگ ڈیٹا
	B.डिजिटल डेटा B.Digital Data B.ڈیجیٹل ڈیٹا
	C.मोडेम डेटा C.Modem Data C.موڈیم ڈیٹا
	D.वॉट्स डेटा D.Watts Data D.واٹس ڈیٹا
Answer:	B.डिजिटल डेटा B.Digital Data B.ڈیجیٹل ڈیٹا
146	'डोळा' या शब्दाचा समानार्थी शब्द कोणता ?
	A.नयन
	B.नमन
	C.नंदन
	D.वदन
Answer:	A.नयन

147 125 लहान आणि समान घन एक मोठा घन बनवण्यासाठी एकत्र ठेवले आहेत. जर असे लहान घन काढून टाकले जे बाह्यस्तर बनवतात, तर किती लहान घन उरतील?

125 small and identical cubes are placed together to form a big cube. If the smaller cubes which from the external layers are removed, how many smaller cubes remain?

125 چھوٹے چھوٹے ایک جیسے کیوبس ساتھ میں رکھے گئے ہیں ایک بڑا کیوب بنانے کے لئے جو باہری تہوں سے جدا کئے گئے ہیں۔ تو کتنے چھوٹے کیوبس باقی رہیں گے؟

A.75
A.75
A.75

B.9
B.9
B.9

C.27
C.27
C.27

D.50
D.50
D.50

Answer: C.27
C.27
C.27

148 **सूचना**: खालील आकृतीचे प्रतिबिंब शोधून काढा

DIRECTIONS: Find the mirror image of the figure given below.

ہدایات: نیچے دیئے گئے شکل کی آئینہ معکوس شکل کیا ہوگی۔

मुख्य आकृती
Main Figure
اصل شکل

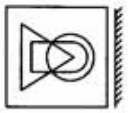

उत्तरासाठी पर्यायी आकृत्या
Answer Figure
جوابی شکل

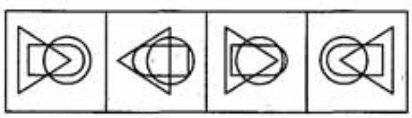

A. (A)

B. (B)

C. (C)

D. (D)

Answer: D. (D)

149 सूचना: दिलेल्या पर्यायांमधून वेगळे ते बाहेर काढा.

DIRECTIONS: Find the odd one out from the given alternatives.

سمت: دیے گئے متبادل میں سے بے جوڑ کو تلاش کرو۔

A.अशनी
A.Asteroid
A.سیارچہ

B.तारा
B.Star
B.تارہ

C.ग्रह
C.Planet
C.سیارہ

D.अग्निबाण
D.Rocket
D.راکٹ

Answer: D.अग्निबाण
D.Rocket
D.راکٹ

150 8 मुलं आणि 12 पुरूष एक काम 9 दिवसांत पूर्ण करतात. जर प्रत्येक मुलाला पुरूषाला काम करण्यासाठी लागणाऱ्या वेळेच्या दुप्पट वेळ घेतला, तर तेच काम 12 पुरूष किती दिवसांत पूर्ण करतील?

8 children and 12 men complete a certain piece of work in 9 days. If each child takes twice the time taken by a man to finish the work, in how many days will 12 men finish the same work?

8 بچوں اور 12 آدمیوں نے مِل کر ایک کام کو 9 دنوں میں مکمل کیا۔ اگر ہر بچہ کام کو ختم کرنے کے لیے مرد کی نسبت 2 گنا وقت لیتا ہے، تو 12 آدمی اسی کام کو کتنے دنوں میں ختم کریں گے؟

A.8 दिवस
A.8 days
A. 8 دن

B.10 दिवस
B.10 days
B. 10دن

C.11 दिवस
C.11 days
C. 11دن

D.12 दिवस
D.12 days
D. 12دن

Answer: D.12 दिवस
D.12 days
D. 12دن

151 एका सकाळी कुश आणि हर्षल एका चौकात एकमेकांकडे तोंड करून बोलत होते. हर्षलची सावली कुशच्या बरोबर डावीकडे असल्यास कुशचे तोंड कोणत्या दिशेस होते?

One morning Kush and Harshal were talking to each other face to face at a crossing. If Harshal's shadow was exactly to the left of Kush, which direction was Kush facing?

ایک مرتبہ صبح کے وقت کوش اور ہرشل ایک چوراہے پر آمنے سامنے ایک دوسرے سے باتیں کر رہے تھے- اگر ہرشل کی پرچھائیں کوش کے بالکل بائیں جانب ہے تو کوش کس سمت میں دیکھ رہا تھا؟

A.पूर्व
A.East
A.مشرق

B.पश्चिम
B.West
B.مغرب

C.उत्तर
C.North
C.شمال

D.दक्षिण
D.South
D.جنوب

Answer: C.उत्तर
C.North
C.شمال

152 निर्देश: मालिका पूर्ण करा

S, L, Q, J, ?, H, M, F

DIRECTION: Complete the series

S, L, Q, J, ?, H, M, F

ہدایت اس سرج کو مکمّل کرو

S, L, Q, J, ?, H, M, F

A.O
A.O
A.O

B.N
B.N
B.N

C.G
C.G
C.G

D.D
D.D
D.D

Answer: A.O
A.O
A.O

153 एनएव्हीआयसी (NavIC) हा भारताचा _____याला विकल्प असेल–

The NavIC will be India’s indigenous alternative to –

این اے وی آئی سی (NavIC) _____ کا ہندوستانی مقامی متبادل ہوگا

A.फेसबुक
A.Facebook
A.فیس بک

B.जीपीएस
B.GPS
B.جی پی ایس

C.गुगल
C.Google
C.گوگل

D.यांपैकी कोणतेही नाही
D.None of these
D.ان میں سے کوئی نہیں

Answer: B.जीपीएस
B.GPS
B.جی پی ایس

154 **सूचना:** दिलेल्या पर्यायांमधून श्रेणी पूर्ण करणारी योग्य आकृती निवडा.

DIRECTIONS: Complete the series by choosing right figure from the given choices.

ہدایات: دیئے گئے اختیارات میں صحیح شکل کا انتخاب کر کے سیریز کو مکمل کیجیئے۔

Problem Figures

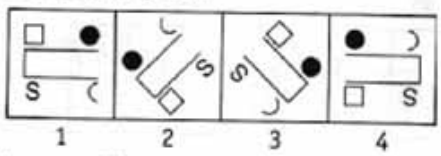

Answer Figures

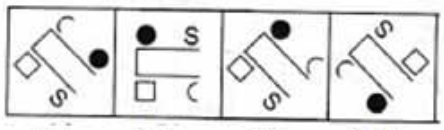

A. (A)

B. (B)

C. (C)

D. (D)

Answer: C. (C)

155 ताणाचे रोगकारक जंतू यांनी सांगितले

Cognitive theory of stress is given by

تناؤ کی ادراکی تھیوری کس نے دی؟

A.सेले
A.Selye
A. سیلی

B.पार्कर
B.Parker
B. پارکر

C.लाजरस
C.Lazarus
C. لزاورس

D.बेनेट
D.Benet
D.بنٹ

Answer: C.लाजरस
C.Lazarus
C. لزاورس

156 **सूचना:** खालील प्रश्नात असे 3 घटक आहेत ज्यांचा परस्परांशी विशिष्ट संबंध आहे. समान संबंध वर्तुळाच्या संचांनी दर्शविलेला आहे, प्रत्येक वर्तुळ त्याचा आकार कितीही असला तरी, एका घटकाचे प्रतिनिधित्व करते. योग्य वर्तुळाच्या संचांशी खालील घटकांच्या जोड्या लावा.

DIRECTION: The question below has three items having certain relationship among them. The same relationship is expressed by sets of circles, each circle representing one item irrespective of its size. Match the items with right set of circles.

ہدایت:مندرجہ ذیل سوال میں تین آئٹم ہیں جن کے مابین مختلف تعلقات ہیں۔ دائروں کے ایک سیٹ کے ذریعہ یکساں تعلق ظاہر کیا جاتا ہے، ہر دائرہ سائز سے قطع نظر ایک آئٹم کی نمائندگی کرتا ہے۔ آئٹم کو دائروں کے درست سیٹ کے ساتھ ملائیں۔

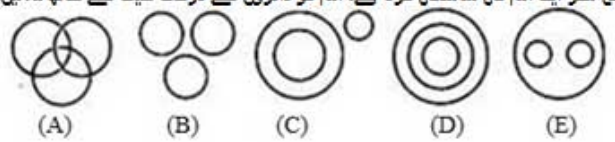

प्रामाणिक, बुद्धिमान, गरीब

Honest, Intelligent, Poor

ایماندار، عقلمند، غریب

A. (A)

B. (B)

C. (C)

D. (D)

Answer: A. (A)

157 GP 8, 4, 2, …,1/1024 चे शेवटून 6वे पद .....हे आहे:

The 6th term from the end of the GP 8, 4, 2, …,1/1024 is:

8, 4, 2, …, 1/1024 س سرج کی چھٹی ٹرم کیا ہے :

A.1/4
A.1/4
A.1/4

B.1/2
B.1/2
B.1/2

C.1/128
C.1/128
C.1/128

D.1/16
D.1/16
D.1/16

Answer: A.1/4
A.1/4
A.1/4

158 निर्देश: खालीदिलेल्या अक्षराच्या क्रमात काही अक्षरे गहाळ केली आहेत ते त्या क्रमाने खाली दिलेल्या पर्यायांपैकी एक आहे

ab _ aa _ ba _ bb_

DIRECTIONS: In each of the following letter series, same of the letters are missing which are given in that order as one of the alternatives below it.

ab _ aa _ ba _ bb_

دایت جیل کے حرف سرج میں کوئی حرف گمشدہ ہے آپکو انکی شناخت جیل کے اختیارات سے کرنی ہے

ab _ aa _ ba _ bb_

A.abab
A.abab
A.abab

B.bbaa
B.bbaa
B.bbaa

C.bbbb
C.bbbb
C.bbbb

D.aaaa
D.aaaa
D.aaaa

Answer: B.bbaa
B.bbaa
B.bbaa

159 पुढील जोडशब्द पूर्ण करा . ‘ गोरा ----------’

A.गोमटा

B.गुंटा

C.गुबगुबीत

D.भरारा

Answer: A.गोमटा

160 A sentence with an underlined idiomatic expression is given. What is the meaning of the idiomatic expression ‘Dog days’ in the sentence given below?
The dog days of summer are a difficult period for those who have to work out in the open.

A.The Hottest days of summer

B.The Coolest days of summer

C.The Happiest days of summer

D.None of the above

Answer: A.The Hottest days of summer

161 Fill in the blank with the correct article.
_____wisdom of Solomon is great.

A.The

B.A

C.An

D.No article required

Answer: A.The

162 सूचना: खालील प्रश्नांमध्ये दिलेल्या पर्यायांमधून संबंधित अक्षर/शब्द/संख्या निवडा.

कुत्रा : अलर्करोग/ रेबीज :: डास : ?

DIRECTIONS: In the following question, select the related letter/word/number from the given alternatives.

Dog : Rabies :: Mosquito : ?

سمت: مندرجہ ذیل سوال میں، دیے گئے متبادل سے متعلقہ حرف/لفظ/نمبر منتخب کریں۔

کتا : باؤلا پن :: مچھر : ؟

A.महामारी
A.Plague
A.طاعون

B.मृत्यू
B.Death
B.موت

C.हिवताप
C.Malaria
C.ملیریا

D.दंश
D.Stings
D.ڈنک

Answer: C.हिवताप
C.Malaria
C.ملیریا

163 Out of the given four words only one is not spelt correctly. Find the word that is not correctly spelt.

A.Basicly

B.Apparently

C.Completely

D.Definitely

Answer: A.Basicly

164 2434 + 8742 – 3427 – 9941 – 2724 =?

2434 + 8742 – 3427 – 9941 – 2724 =?

2434 + 8742 – 3427 – 9941 – 2724 =?

A.–4916
A.–4916
A.–4916

B.–2560
B. –2560
B. –2560

C.32650
C.32650
C.32650

D.12365
D.12365
D.12365

Answer: A.–4916
A.–4916
A.–4916

165 दिलेल्या मॅट्रिक्समधील गहाळ संज्ञा शोधा.
Find the missing term in the given matrix.
نیچے سے گمنام ٹرم کو کھوجے .

F	W	O
A	J	K
E	M	?

A. N

B. X

C. D

D. P

Answer: C. D

166 एका कार्यालयात 1250 व्यक्ती काम करीत आहेत. जर पुरुषांची संख्या 650 असेल आणि उरलेल्या स्त्रिया असतील तर स्त्रीयांच्या संख्येचा पुरूषांच्या संख्येशी गुणोत्तर किती ते शोधा.

There are 1250 persons are working in an office. If the number of males is 650 and remaining are females. Find the ratio of the number of females to number of males?

ایک آفس میں 1250 لوگ کام کر رہے ہیں۔ اگر مردوں کی تعداد 650 ہے اور باقی عورتیں ہیں۔ تو مردوں کے مقابلہ میں عورتوں کی تعداد کا تناسب معلوم کریں؟

A.1:2
A.1:2
A.1:2

B.12:13
B.12:13
B.12:13

C.13:14
C.13:14
C.13:14

D.13:14
D.14:13
D.13:14

Answer: B.12:13
B.12:13
B.12:13

167 यापैकी कोणती आकृती वांगे, मांस, भाज्या दर्शवते?

Which one of the following represents Brinjal, Meat, Vegetables?

ذیل میں سے کونساایک بینگن، گوشت، سبزیوں کی نمائندگی کرتا ہے؟

(A) 

(B) 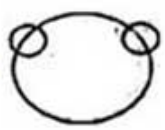

(C) 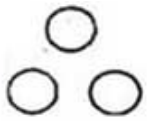

(D) 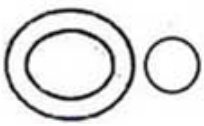

Answer: (D) 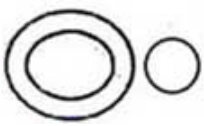

168 ‘PULVERISE’ पासून खालील शब्दांपैकी कोणते शब्द तयार केले जाऊ शकतात?

Which of the following words can be formed from ‘PULVERISE’?

مندرجہ ذیل الفاظ میں سے کونسا ‘PULVERISE’ سےبناکا جاسکتا ہے؟

A.PULL
A.PULL
A.PULL

B.VERSES
B.VERSES
B.VERSES

C.RIPE
C.RIPE
C.RIPE

D.VINE
D.VINE
D.VINE

Answer: C.RIPE
C.RIPE
C.RIPE

169 ‘चल’ या शब्दाचा विरुद्धार्थी शब्द कोणता ?

	A.अचल
	B.अंचल
	C.आचल
	D.अस्थिर
Answer:	A.अचल

170	प्रश्नासाठी सूचना: खालील मालिका पूर्ण करा. AL, EO, IR, ____, UX DIRECTION: Complete the following series. AL, EO, IR, ____, UX سوال کے لیے ہدایت:مندرجہ ذیل سیریز کو مکمل کریں۔ AL, EO, IR, ____, UX
	A.OU A.OU A.OU
	B.OI B.OI B.OI
	C.UA C.UA C.UA
	D.OA D.OA D.OA
Answer:	A.OU A.OU A.OU

171 सूचना: खालील दिलेल्या प्रश्नामध्ये काही विधाने आणि काही निष्कर्ष आहेत. सामन्यात: ज्ञात तथ्यांपेक्षा ते वेगळे असतील तर दिलेली विधाने तुम्हाला सत्य मानवी लागतील आणि त्यानंतर दिलेल्या विधानाचे अनुकरण दिलेल्यापैकी कोणता निष्कर्ष तार्किकदृष्ट्या करतो ते ठरवा.

विधाने :
O>P>Q, R>S>T, R>Q
निष्कर्ष :
I. O>Q
II. T>R

DIRECTIONS: In the question given below, there are few statements followed by few conclusions. You have to take the given statements to be true even if they seem to be at variance with commonly known facts and then decide which of the given conclusion logically follow(s) from the given statements.

Statements:
O>P>Q, R>S>T, R>Q
Conclusions:
I. O>Q
II. T>R

ہدایات: مندرجہ ذیل سوال میں، کچھ بیانات کے بعد کچھ نتائج موجود ہیں. اگر آپ کو عام طور پر جانے جاتے حقائق کے ساتھ بھی متغیر ہونے لگے تو بھی آپ دئے گئے بیانات دماغ میں رکھیں اور پھر اس بات کا فیصلہ کریں کہ ذیل میں دیا گیا کونسا نتیجہ منطقانہ طور پر دیے گئے بیانات کی پیروی کرتا ہے.

بیانات:
O>P>Q, R>S>T, R>Q
نتائج:
O>Q .I
T>R .II

A.तर फक्त I निष्कर्ष अनुकरण करतो
A.If only Conclusion I follows
A.اگر صرف نتیجہI پیروی کرتا ہے

B.तर फक्त II निष्कर्ष अनुकरण करतो
B.If only Conclusion II follows
B.اگر صرف نتیجہII پیروی کرتا ہے

C.तर I किंवा II यापैकी एक निष्कर्ष अनुकरण करतो
C.If either Conclusion I or II follows
C.اگر I اور II نتائج میں سے ایک پیروی کرے

D.तर I व II हे दोन्हीही निष्कर्ष अनुकरण करीत नाहीत
D.If neither Conclusion I nor II follows
D.اگرI اور II نتائج میں سے کوئی بھی پیروی نہ کرے

Answer: A.तर फक्त I निष्कर्ष अनुकरण करतो
A.If only Conclusion I follows
A.اگر صرف نتیجہI پیروی کرتا ہے

172 **सूचना**: दिलेल्या चारांपैकी वेगळी (असंबद्ध) असणारी आकृती शोधून काढा.

DIRECTIONS: Find the odd from the given four figures.

ہدایات: نیچے دی گئی چار شکلوں میں طاق کونسی ہے۔

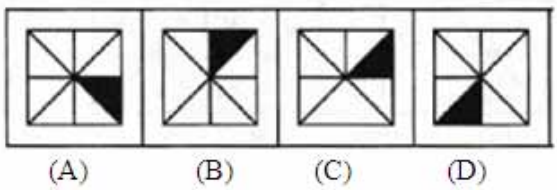

A. (A)

B. (B)

C. (C)

D. (D)

Answer: A. (A)

173 1200 चे 20% =?

20% of 1200 =?

1200؟= 20% ؏

A.240
A.240
A.240

B.120
B.120
B.120

C.140
C.140
C.140

D.340
D.340
D.340

Answer: A.240
A.240
A.240

174 **सूचना:** खालील प्रश्नात कागदाच्या एक तुकड्याला प्रश्नातील आकृतीत दाखविल्याप्रमाणे घडी घातली आहे. उत्तरादाखल पर्यायांमधून अशी आकृती निवडा जी भोक पडल्यानंतर उलगडलेल्या कागदाचे स्वरूप दाखवेल.

DIRECTIONS: In the following question a piece of paper is folded in the manner shown in the question figure(s). Select the figure out of the answer choices showing the unfolded pattern after the punches (cut).

ہدایات: نیچے دیئے گئے سوالوں میں کاغذ کا ایک ٹکڑا اس طرح جوڑا گیا ہے جیسے سوال کی شکل میں بتایا گیا ہے، دیئے گئے جوابات کے اختیارات میں سے اس طرح انتخاب کیجیئے کہ کٹ لگانے کے بعد بغیر جوڑا ہوا پیٹرن دکھائی دے۔

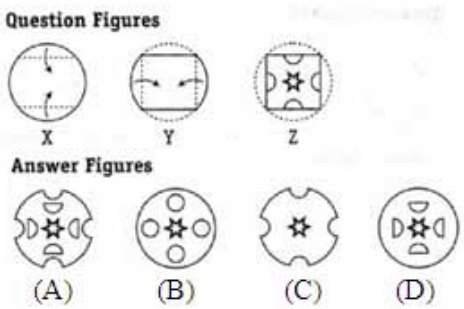

A. (A)

B. (B)

C. (C)

D. (D)

Answer: B. (B)

175 सूचनाः दिलेल्या पर्यायांमधून ऍनालॉगस शब्द निवडा.

आशियाचे खंडांसोबत नाते आहे जसे ... याचे बेटांसोबत आहे.

DIRECTIONS: Choose the analogous word from the given alternatives.

Asia is to Continents as _____ is to Islands.

ہدایات: دیے گئے متبادل سے مطابق لفظ کا انتخاب کریں

ایشیا اگر براعظم کے لئے ہے تو _____ جزیرہ کے لئے ہے

A.होनशु
A.Honshu
A. ہونشو

B.ग्रीनलँड
B.Greenland
B. گرین لینڈ

C.बोर्निओ
C.Borneo
C. بورنیو

D.मादागास्कर
D.Madagascar
D. مداگسکر

Answer: B.ग्रीनलँड
B.Greenland
B. گرین لینڈ

176 जर परावर्तीत होणारी वेळ 3:43 असेल तर घड्याळामधील खरी वेळ?

If reflecting time is 3:43 then the real time of clock is?

اگر معکوس وقت 3:43 ہو تو گھڑی میں اصلی وقت کیا ہوگا؟

A.3:17
A.3:17
A.3:17

B.7:17
B.7:17
B.7:17

C.8:17
C.8:17
C.8:17

D.8:43
D.8:43
D.8:43

Answer: C.8:17
C.8:17
C.8:17

177 Choose the word which is most similar in meaning to the given word.
EVERLASTING

A.Eternal

B.Short-lived

C.Temporary

D.Momentary

Answer: A.Eternal

178 सूचना: प्रश्नांची उत्तरे देण्यासाठी माहितीचा काळजीपूर्वक अभ्यास करा.
T, U, V, W, X,Y आणि Z हे सात लोक उत्तरेकडे तोंड करुन एका सरळ रेषेत बसलेले आहेत, पण ते याच क्रमाने बसलेले आहेत असे नाही. T हा W च्या डाव्या बाजूला पाचव्या जागेवर बसतो, जो कुठल्याही अंतिम टोकावर बसलेला नाही. दोन लोक Z आणि X यांच्या मध्ये बसतात. Y हा U च्या डाव्या बाजूला तिसऱ्या जागेवर बसतो. Y बरोबर मध्यभागी बसतो.
Z हा Y चा तत्काळ शेजारी नाही.
जर सर्व सात मित्रांना वर्णानुक्रमाने उजवीकडून डावीकडे बसविले जाते तर किती जणांच्या स्तिथीत बदल होणार नाही?

DIRECTIONS: Study the information carefully to answer the questions.
Seven friends T, U, V, W, X,Y and Z are sitting in a straight line facing North. T sits fifth to the left of W, who does not sit at any of extreme ends. Two people sit between Z and X. Y sits third to the left of U. Y sits exactly in the middle.
Z is not an immediate neighbour of Y.
If all the seven friends are made to sit & alphabetically right to left, positions of how many will remain unchanged?

ہدایات: سوالوں کے جواب دینے کے لیے معلومات کو دھیان سے پڑھیں۔

سات دوست T، U، V، W، X، Y اور Z شمال کا رخ کیے ہوئے ایک سیدھی لائن میں بیٹھے ہیں۔ T، W کے بائیں سے پانچویں پر بیٹھا ہے، جو کہ کسی بھی انتہائی سرے پر نہیں بیٹھا ہے۔ X اور Z کے درمیان دو لوگ بیٹھے ہیں۔ Y، U کے بائیں سے تیسرے پر بیٹھا ہے۔ Z، Y ٹھیک درمیان میں بیٹھا ہے۔ کا فوری پڑوسی نہیں ہے۔
اگر سبھی سات دوستوں کو حروف تہجی کے اعتبار سے دائیں سے بائیں بیٹھنے کے لیے کہا جاتا ہے، تو کتنے لوگوں کی پوزیشن تبدیل نہیں ہوگی؟

A.कोणतेही नाही
A.None
A.کوئی نہیں

B.एक
B.One
B.ایک

C.दोन
C.Two
C.دو

D.तीन
D.Three
D.تین

Answer: A.कोणतेही नाही
A.None
A.کوئی نہیں

179 खालीलपैकी कोणते एक वंगण आहे?

Which one among the following is a Lubricant?

مندرجہ ذیل میں سے کون ایک گریس ہے؟

A.जर्मेनिअम
A.Germanium
A.جرمانیم

B.गंधक
B.Sulphur
B.سلفر

C.ग्रेफाइट
C.Graphite
C.گریفائٹ

D.वरील एकही नाही
D.None of these
D.ان میں سے کوئی بھی نہیں

Answer: C.ग्रेफाइट
C.Graphite
C.گریفائٹ

180 शिकवण्याची पायरी म्हणजे

The stage of teaching is—

تدریس کا مرحلہ ہے—

A.प्रारंभिक तयारी पायरी
A.Preparatory stage
A.تیاری کے مرحلے

B.सादरीकरण पायरी
B.Presentation stage
B.پیش کش کے مرحلے

B.आंतरक्रियात्मक पायरी
B.Interactional stage
B.انٹریکشنل مرحلے

C.शिकवणे पश्चात-सिद्धता पायरी
C.Post teaching-readiness stage
C.درس و تدریس کے بعد کے مرحلے

D.वरील सर्व
D.All the above
D.مذکورہ تمام

Answer:

D.वरील सर्व
D.All the above
D.مذکورہ تمام

181 संतुलनाची संकल्पना यांच्याद्वारे प्रस्तावित केली गेली

The concept of balance was proposed by

توازن کا تصور _____کے ذریعہ دیا گیا تھا۔

A.फ्रुड हायडर
A.Freud Heider
A.فریدحیدر

B.फ्रिंट्झ हायडर
B.Fritz Heider
B.فرٹز حیدر

C.फ्रिझ बेन्सन
C.Fritz Benson
C.فرٹز بینسن

D.लॉर्डस
D.Lords
D.لارڈس

Answer:

B.फ्रिंट्झ हायडर
B.Fritz Heider
B.فرٹز حیدر

182 **सूचना:** खालील प्रश्नात उत्तरातील पर्यायांपैकी कोणत्या पर्यायी आकृतीत प्रश्नातील आकृती अंतर्भूत आहे?

DIRECTIONS: In the given question find the answer figure in which question figure is embedded.

ہدایات: دیئے گئے سوال میں جواب والی شکل دریافت کیجیئے جس میں سوال والی شکل سرایت کرگئی ہے

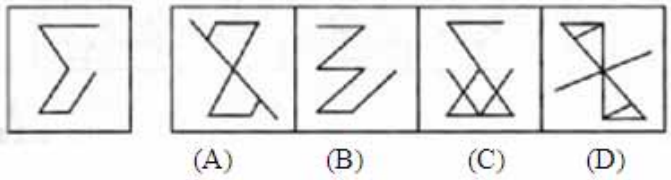

A. (A)

B. (B)

C. (C)

D. (D)

Answer: C. (C)

183 खालीलपैकी कोणते शब्द केवळ जीवाने भौतिक जागा व्यापल्याचेच दाखवत नाहीत, तर जीवाच्या समुदायामध्ये कार्यकारी भुमिकाही दर्शवतात?

Which one of the following terms describes not only the physical space occupied by an organism, but also its functional role in the community of organisms?

مندرجہ ذیل شرائط میں سے کونسی شرط نہ صرف ، آرگانزم کے ذریعہ جسمانی جگہ کو گھیرنے کے بارے میں بتاتا ہے بلکہ حیاتیات کی برادری میں اپنا فعال کردار کو بیان کرتا ہے؟

A.इकोटोन
A.Ecotone
A.ایکوٹون

B.पर्यावरणीय कोनाडा
B.Ecological niche
B. ماحولیاتی پناہ

C.मुक्काम
C.Habitat
C. ہیبی ٹیٹ

D.गृह श्रेणी
D.Home range
D. ہوم رینج

Answer: B.पर्यावरणीय कोनाडा
B.Ecological niche
B. ماحولیاتی پناہ

184 एकमेकांवर अवलंबून असणारे -

A.स्वावलंबी

B.परावलंबी

C.परस्परावलंबी

D.परजीवी

Answer: C.परस्परावलंबी

185 आपली राष्ट्रीय दिनदर्शिका शाकारंभावर आधारित असून तिचा पहिला महिना ____ आहे

Our National Calendar is based on the Saka Era with ____ as it first month

ہمارا قومی کیلنڈر ساکا دور پر مبنی ہے اسکا پہلا مہینہ_____ہے

A.वैशाख
A.Baisakh
A.بیساکھ

B.पौष
B.Paush
B.پوش

C.चैत्र
C.Chaitra
C.چیتر

D.श्रावण
D.Sawan
D.ساون

Answer: C.चैत्र
C.Chaitra
C.چیتر

186 एका फोटोकडे बोट दाखवून एक स्त्री म्हणतेः “हा माझ्या पतीच्या वडिलांच्या पत्नीचा एकुलता मुलगा आहे” मग तो पुरुष आणि त्या स्त्रीचे नाते काय?

Pointing to a photograph a woman says: “He is the only son of the wife of my husband’s father”. How is the man related to the woman?

تصویر کی طرف اشارہ کرکے عورت نے کہا: " یے میرے شوہر کے باپ کی بیوی کا واحد بیٹا ہے." آدمی کا عورت سے کیا رشتہ تھا؟

A.मुलगा
A.Son
A.بیٹا

B.जावई
B.Son-in-law
B.داماد

C.पती
C.Husband
C.شوہر

D.भाऊ
D.Brother
D.بھائی

Answer: C.पती
C.Husband
C.شوہر

187 निर्देश: खालील प्रश्न दिलेल्या शब्दांवर आधारित आहेत.

FEST/ LACK/ WORK/ RUSH/ FILM

जर शब्दकोशात शब्द डावी कडून उजवा या क्रमाने मांडले, तर खालीलपैकी कोणते मूळ शब्द डाव्या बाजूच्या दुसरया स्थानी आहे?

DIRECTIONS: Following question is based on the given words.

FEST/ LACK/ WORK/ RUSH/ FILM

If all the words are arranged in dictionary order from left to right, which of the following original words is the second from the left end?

ہدایت جیل کے سوال دے ہے لفجونپر مشتمل ہیں

FEST/ LACK/ WORK/ RUSH/ FILM

اگر ان لفجونکو لغت جیسا لگایا جائے تو کونسا بنیادی لفج یہ الٹے ہاتھ کے باجو سے دوسرا ایگا ؟

A.LACK
A.LACK
A.LACK

B.WORK
B.WORK
B.WORK

C.FEST
C.FEST
C.FEST

D.FILM
D.FILM
D.FILM

Answer: D.FILM
D.FILM
D.FILM

188 जर ,÷ = P ,x = N ,–L = +, M = तर? = N 5 P 5 L 5 M 5 5

If L = +, M = –, N = x, P = ÷, then 5 N 5 P 5 L 5 M 5 = ?

اگر L = +, M = –, N = x, P = ÷, ہو 5 N 5 P 5 L 5 M 5 = ? کیا ہوگا؟

A. 0

	B. 5
	C. 10
	D. 15
Answer:	B. 5

189	‘ खडे फोडणे ‘ या वाक्प्रचाराचा अर्थ काय ?
	A.दगड फोडणे
	B.ओरखडे पाडणे
	C.दोष देणे.
	D.सुपारी फोडणे
Answer:	C.दोष देणे.

190 सूचना : खालील प्रत्येक प्रश्नात दोन विधाने I आणि II दिलेले आहेत. हे विधान एकतर स्वतंत्र कारण असू शकतात किंवा स्वतंत्र कारणांचे परिणाम असू शकतात. यांपैकी एक विधान इतर विधानाचा परिणाम असू शकतो. दोन्ही विधाने वाचा आणि खालीलपैकी कोणत्या उत्तराचा पर्याय या दोन्ही विधानांमधील संबंधांचे वर्णन करतो ते ठरवा.

विधान :
I. विद्यार्थ्यांचे ग्रेड सतत कमी होत आहेत.
II. शिक्षणाची गुणवत्ता सतत कमी होत आहे.

DIRECTIONS: Below in each question are given two statements I and II. These statements may be either independent causes or may be effects of independent causes. One of these statements may be the effect of the other statement. Read both the statements and decide which of the following answer choice correctly depicts the relationship between these two statements.

Statements:
I. Students grades are steadily falling.
II. Quality of education is steadily falling.

ہدایات: نیچے ہر سوال میں دو بیانات I اور II آزاد وجوہات یا پھر آزاد وجوہات کے اثرات ہو سکتے ہیں۔ ان دیے گئے ہیں۔ یہ بیانات یا تو بیانات میں سے ایک بیان دوسرے کا اثر ہو سکتا ہے۔دونوں بیانات پڑھیں اور فیصلہ کریں کہ نیچے دیے گئے کس جواب کا انتخاب ان دونوں بیانات کے در میان تعلق کو ٹھیک سے ظاہر کرتا ہے۔

بیانات:
I –طلباء کے گریڈز مسلسل گر رہے ہیں۔
II ۔ تعلیم کا معیار مسلسل گر رہا ہے۔

A.विधान I कारण आहे आणि विधान II त्याचा परिणाम आहे;
A.Statement I is the cause and statement II is its effect;
A.بیان نمبر I وجہ ہے اور بیان نمبر II اس کا اثر ہے۔

B.विधान II कारण आहे आणि विधान I त्याचा परिणाम आहे;
B.Statement II is the cause and statement I is its effect;
B.بیان نمبر II وجہ ہے اور بیان نمبر I اس کا اثر ہے۔

C.विधान I आणि II दोन्ही स्वतंत्र कारणे आहेत;
C.Both the statements I and II are independent causes;
C.دونوں بیانات نمبر I اور نمبر II آزاد وجوہات ہیں۔

D.विधान I आणि II दोन्ही स्वतंत्र कारणांचे परिणाम आहेत;
D.Both the statements I and II are effects of independent causes;
D.دونوں بیانات نمبر I اور نمبر II آزاد وجوہات کے اثرات ہیں۔

Answer: B.विधान II कारण आहे आणि विधान I त्याचा परिणाम आहे;
B.Statement II is the cause and statement I is its effect;
B.بیان نمبر II وجہ ہے اور بیان نمبر I اس کا اثر ہے۔

For More Info And Videos About TAIT-Exam Syllabus And Other Exam Visit My Channel
BADSHAHimp SubScribe Like & Share YouTube WWW.YouTube/BADSHAHimp

191 आकाशपेक्षा गोपाळ लहान असून कुणालपेक्षा उंच आहे. कुणालपेक्षा नवीन लहान आहे. नवीनपेक्षा जतीन लहान आहे.

तर कोण सर्वात उंच आहे ?

Gopal is shorter than Aakash but taller than Kunal. Navin is shorter than Kunal. Jatin is shorter than Navin.

Who among them is the tallest?

گوپال آکاش سے چھوٹا ہے مگر کنال سے لمبھا ہے. نوین کنال سے چھوٹا ہے.جتیں نوین سے چھوٹا ہے.ان میں سے کون سب سے لمبھا ہے؟

A.(a) गोपाळ
A.Gopal
A.گوپال

B.(b) आकाश
B.Aakash
B.آکاش

C.(c) कुणाल
C.Kunal
C.کنال

D.(d) नवीन
D.Navin
D.نوین

Answer: B.(b) आकाश
B.Aakash
B.آکاش

192 सूचना: दिलेल्या पर्यायांमधून वेगळे ते बाहेर काढा.

DIRECTIONS: Find the odd one out from the given alternatives.

سمت: دیے گئے متبادل میں سے بے جوڑ کو تلاش کرو۔

A.सुट्टी
A.Holiday
A.تعطیل

B.रविवार
B.Sunday
B.اتوار

For More Info And Videos About TAIT-Exam Syllabus And Other Exam Visit My Channel
BADSHAHimp SubScribe Like & Share YouTube WWW.YouTube/BADSHAHimp

C.सोमवार
C.Monday
C.پیر

D.शुक्रवार
D.Friday
D.جمعہ

Answer: A.सुट्टी
A.Holiday
A.تعطیل

193 सूचना: या प्रश्नांमध्ये पर्याय A आणि B यांच्या सहित दोन विधाने दिलेली आहेत. जरी सामान्यपणे माहीत असलेल्या तथ्यांबरोबर जुळत नसले तरी खालील विधाने बरोबर आहेत असे समजून तुमचे योग्य उत्तर लिहा:
सर्व पादचारी गरीब आहेत.
सर्व गरीब प्रामाणिक आहेत. म्हणून,
A: सर्व प्रामाणिक पादचारी आहेत.
B: सर्व पादचारी प्रामाणिक आहेत.

DIRECTION: In these questions, two statements are given, followed by two inferences A and B. Assume the statements to be true even if they are at variance with the known facts and then mark your answer as:

All pedestrians are poor.
All poor are honest. So,
A: All honest are pedestrians.
B: All pedestrians are honest.

ہدایت:ان سوالات میں، دو بیانات دیے گئے ہیں، جن کے بعد دو تجاویز A اور B دیے گئے ہیں۔ بیانات کے درست ہونے کو تسلیم کریں اگرچہ وہ عام طور پر معلوم حقائق کے برعکس ہوں اور پھر اس کے مطابق اپنا جواب نشان زد کریں:

سبھی پیدل چلنے والے غریب ہیں۔
سبھی غریب ایماندار ہیں۔ لہٰذا،

A: تمام ایماندار پیدل چلنے والے ہیں۔
B: تمام پیدل چلنے والے ایماندار ہیں۔

A.जर केवळ पर्याय (A) असल्यास.
A.If only inference (A) follows
A.صرف تجویز (A) پیروی کرتا ہے۔

B.जर केवळ पर्याय (B) असल्यास.
B.If only inference (B) follows
B.صرف تجویز (B) پیروی کرتا ہے۔

For More Info And Videos About TAIT-Exam Syllabus And Other Exam Visit My Channel
BADSHAHimp SubScribe Like & Share WWW.YouTube/BADSHAHimp

C.जर दोन्ही पर्याय (A) आणि (B) असल्यास.
C.If both (A) and (B) follow
C.(A) اور (B) دونوں پیروی کرتے ہیں۔

D.जर दोन्ही पर्याय (A) आणि (B) नसल्यास.
D.If neither (A) nor (B) follows
D.نہ تو (A) نہ ہی (B) پیروی کرتے ہیں۔

Answer: B.जर केवळ पर्याय (B) असल्यास.
B.If only inference (B) follows
B.صرف تجویز (B) پیروی کرتا ہے۔

194 जर पेनाला पेन्सिल म्हटले, पेन्सिलला खोडरबर म्हटले, खोडरबरला शार्पनर म्हटले, शार्पनरला पुस्तक म्हटले, पुस्तकाला बॅग म्हटले आणि बॅगेला वर्ग म्हटले. तर आपण काय वाचू शकतो

Pen is called pencil, pencil is called eraser, eraser is called sharpener, sharpener is called book, book is called bag and bag is called class. So we can read?

اگر قلم کو پنسل، پنسل کو ربر، ربر کو قلم تراش، قلم تراش کو کتاب، کتاب کو بیگ اور بیگ کو درسگاہ کہا جائے، تو ہم کیا پڑھ سکتے ہیں؟

A.पुस्तक
A.Book
A.کتاب

B.शार्पनर
B.Sharpener
B.قلم تراش

C.बॅग
C.Bag
C.بیگ

D.वर्ग
D.Class
D.درسگاہ

Answer: C.बॅग
C.Bag
C.بیگ

For More Info And Videos About TAIT-Exam Syllabus And Other Exam Visit My Channel
BADSHAHimp SubScribe Like & Share YouTube WWW.YouTube/BADSHAHimp

195

खालीलपैकी कोणता अपूर्णांक $\frac{7}{8}$ पेक्षा लहान आणि $\frac{1}{3}$ पेक्षा मोठा आहे?

Which of the following fraction is less than $\frac{7}{8}$ and greater than $\frac{1}{3}$?

مندرجہ ذیل کسور میں کون سی کسر 7/8 سے چھوٹی اور 1/3 سے بڑی ہے؟

(A) $\frac{1}{4}$

(B) $\frac{23}{24}$

(C) $\frac{11}{12}$

(D) $\frac{17}{24}$

Answer: (D) $\frac{17}{24}$

196

2347 × 312 = ?

2347 × 312 = ?

2347 × 312 = ?

A.742264
A.742264
A.742264

B.732264
B.732264
B.732264

C.733264
C.733264
C.733264

D.732364
D.732364
D.732364

Answer:

B.732264
B.732264
B.732264

For More Info And Videos About TAIT-Exam Syllabus And Other Exam Visit My Channel
BADSHAHimp SubScribe Like & Share WWW.YouTube/BADSHAHimp

197 समभुज चौकोनाचे क्षेत्रफळ काधा, ज्याची एक बाजू 20 सेंमी आणि कर्णरिषा 24 सेंमी आहे:

The area of a rhombus, whose one side is 20 cm and one diagonal is 24 cm is:

ایک شکل معین کا رقبہ، جسکا ایک طرف 20 سینٹی میٹر ہے اور ایک وتر 24 سینٹی میٹر ہے:

A.240 सेंमी^{2}
A.240 cm^2
A.240 مربع سینٹی میٹر

B.480 सेंमी^{2}
B.480 cm^2
B.480 مربع سینٹی میٹر

C.384 सेंमी^{2}
C.384 cm^2
C.384 مربع سینٹی میٹر

D.386 सेंमी^{2}
D.386 cm^2
D.386 مربع سینٹی میٹر

Answer: C.384 सेंमी^{2}
C.384 cm^2
C.384 مربع سینٹی میٹر

198 चहाचा उपभोग किती टक्क्यांनी कमी करावा ज्यामुळे जरी किंमत 20% वाढली तरी खर्च वाढणार नाही?

By what percent the consumption of tea should be decreased, so that the expenditure does not increase if the price of tea increases by 20%?

چائے کی کھپت میں کمی کا اندازہ کم ہونا چاہئے، کہ اگر چائے کی قیمت میں 20%اضافہ ہو تو اخراجات میں اضافہ نہ ہو ؟

(A) $16\frac{1}{2}\%$

(B) $16\frac{2}{3}\%$

(C) 16.50%

(D) 17%

For More Info And Videos About TAIT-Exam Syllabus And Other Exam Visit My Channel
BADSHAHimp SubScribe Like & Share YouTube WWW.YouTube/BADSHAHimp

Answer: (B) $16\frac{2}{3}\%$

199 प्रक्षेपणात्मक तंत्रे — साठी वापरली जाऊ शकतात

The Projective techniques can be used—

پروجیکٹو تکنیک کا استعمال کیا جا سکتا ہے-

A.मुलांमधील वैयक्तिक आणि सामाजिक समायोजनांचे मोजमाप करणे
A.To measure personal and social adjustments of the children
A.بچوں کے ذاتی اور سماجی ایڈجسٹمنٹ کی پیمائش کرنے کے لئے

B.मुलांच्या दबल्या गेलेल्या आकांक्षांचा शोध घेणे
B.To explore the repressed desires of the children
B.بچوں کی دبی خواہشات کی تلاش کے لئے

C.मुलांची वृत्ती जाणून घेणे
C.To know the attitudes of the children
C.بچوں کے رویوں کو جاننے کے لئے

D.वरील सर्व
D.All the above
D.مذکورہ تمام

Answer: D.वरील सर्व
D.All the above
D.مذکورہ تمام

200 **सूचना**: दिलेल्या पर्यायांमधून श्रेणी पूर्ण करणारी योग्य आकृती निवडा.

DIRECTIONS: Complete the series by choosing right figure from the given choices.

ہدایات: دیئے گئے اختیارات میں صحیح شکل کا انتخاب کر کے سیریز کو مکمل کیجیئے۔

Problem Figures

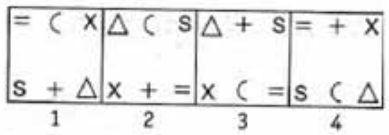

Answer Figures

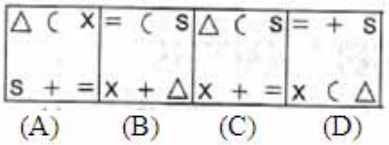

A. (A)

For More Info And Videos About TAIT-Exam Syllabus And Other Exam Visit My Channel
BADSHAHimp SubScribe Like & Share YouTube WWW.YouTube/BADSHAHimp

	B. (B)
	C. (C)
	D. (D)
Answer:	C. (C)

For More Info And Videos About TAIT-Exam Syllabus And Other Exam Visit My Channel
BADSHAHimp SubScribe Like & Share YouTube WWW.YouTube/BADSHAHimp

Question Paper Title : TAIT_PAPER_1

Date of Exam : 2017-12-12 09:00:00

1 सूचना: प्रत्येक प्रश्नाला एक प्रमुख विधानासोबत चार विधाने आहेत ज्यांच्याखाली a, b, c, आणि d असे चार विधान आहेत. क्रमवार विधानांची जोडी निवडा ज्यामध्ये प्रथम विधान दुसऱ्या विधानाला सुचवते, आणि दोन्ही विधाने तर्किकदृष्ट्या प्रमुख विधानासोबत निगडित असेल.

एकतर तो स्मार्ट आहे किंवा मूर्ख आहे.
A. तो स्मार्ट आहे.
B. तो स्मार्ट नाही.
C. तो मूर्ख आहे.
D. तो मूर्ख नाही.

DIRECTIONS: Each question has a main statement followed by four statements labelled A, B, C and D. Choose the ordered pair of statements, where the first statement implies the second, and the two statements are logically consistent with the main statement.

He is either smart or fool .
A. He is smart
B. He is not smart
C. He is fool
D. He is not fool

ہدایت: ہر سوال میں ایک جملہ ہے جسکے بعد چار جملےاے، بی،سی اور ڈی کے نام سے دئے گئے ہیں اسمیں منسلک جوڑیوں کو چنئے۔ جہاں پہلا جملہ دوسرے جملہ کی اور اشارہ کر رہا ہے اور دو جملے منطقی مرکزی بیان کے مطابق ہیں

وہ یا تو ہوشیار ہے یا بے وقوف
Aوہ ہوشیار ہے ۔
Bوہ ہوشیار نہیں ہے ۔
Cوہ بے وقوف ہے ۔
Dوہ بے وقوف نہیں ہے ۔

A.AC
A.AC
A.AC

B.DA
B.DA
B.DA

C.CB
C.CB
C.CB

For More Info And Videos About TAIT-Exam Syllabus And Other Exam Visit My Channel
TAIT च्या 30 प्रश्नपत्रिका PDF
BADSHAHimp Available Request 9765226781
WWW.YouTube.com/BADSHAHimp
Subscribe My Channel

D.AB
D.AB
D.AB

Answer: B.DA
B.DA
B.DA

2 Choose the word which is opposite in meaning to the given word.
ADULTERATION

A.Purification

B.Contamination

C. Pollution

D.Bribery

Answer: A.Purification

3 ‘अखंड‘ या शब्दाचा समानार्थी शब्द कोणता ?

A.खंडित

B.अपूर्ण

C.सलग

D.अलग

Answer: C.सलग

4 बुलबुल आपलं घरट कुठे बनवते?

Where does a Bulbul make its nest?

بلبل اپنا گھونسلا بناتا ہے؟

For More Info And Videos About TAIT-Exam Syllabus And Other Exam Visit My Channel
TAIT च्या 30 प्रश्नपत्रिका PDF
BADSHAHimp Available Request 9765226781
WWW.YouTube.com/BADSHAHimp
Subscribe My Channel

	A.कुंपण A.Hedges A.باڑہ میں
	B.झुडपे B.Bushes B. جھاڑیوں میں
	C.दोन्ही कुंपण आणि झुडपे C.Both hedges and bushes C.باڑوں اور جھاڑیوں دونوں میں
	D.वरील एकही नाही D.None of the above D. مندرجہ بالا میں سے کوئی نہیں
Answer:	C.दोन्ही कुंपण आणि झुडपे C.Both hedges and bushes C.باڑوں اور جھاڑیوں دونوں میں
5	19 जून 1440 रोजी आठवड्याचा कोणता वार होता? What was the day of week on 19th June 1440? 19 جون 1440 کو ہفتہ کا کونسا دن تھا؟
	A.गुरूवार A.Thursday A.جمعرات
	B.बुधवार B.Wednesday B.بدھ
	C.शुक्रवार C.Friday C.جمعہ
	D.शनिवार D.Saturday D.سنیچر
Answer:	C.शुक्रवार C.Friday C.جمعہ

For More Info And Videos About TAIT-Exam Syllabus And Other Exam Visit My Channel
TAIT च्या 30 प्रश्नपत्रिका PDF
BADSHAHimp Available Request 9765226781
WWW.YouTube.com/BADSHAHimp
Subscribe My Channel

6 निर्देश: दिलेल्या विकल्पांमधून योग्य आकृती निवडून मालिका पूर्ण करा.

DIRECTIONS: Complete the series by choosing right figure from the given choices.

ہدایت: فراہم کردہ اختیارات سے صحیح فیگر منتخب کرکے سیریز مکمل کریں۔

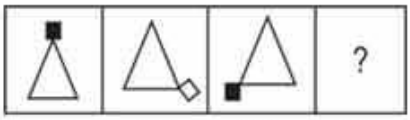

(A) (B) (C) (D)

(B) 

(C) 

(D) 

(A) 

Answer: 

(C)

7 Choose the word which is most similar in meaning to the given word.
BEGIN

A.Commence

B.Cease

C.Conclude

D.Terminate

Answer: A.Commence

For More Info And Videos About TAIT-Exam Syllabus And Other Exam Visit My Channel
TAIT च्या 30 प्रश्नपत्रिका PDF
BADSHAHimp Available Request 9765226781
YouTube WWW.YouTube.com/BADSHAHimp
Subscribe My Channel

8 मुलींचा वर्ग एका रांगेत उभा आहे. एक मुलगी दोन्ही बाजूनी नवव्या स्थानावर उभी आहे. तर वर्गात एकूण किती मुली आहेत ?

A class of girls stands in a single line. One girl is ninth in order from both the ends. How many girls are there in the class?

لڑکیوں کی کلاس ایک ہی کتار میں کھڑے ہے. ایک لڑکی دونوں چھور سے نووی ہے. کلاس میں کتنی لڑکیاں ہے

A.27
A.27
A.27

B.17
B.17
B.17

C.38
C.38
C.38

D.39
D.39
D.39

Answer: B.17
B.17
B.17

For More Info And Videos About TAIT-Exam Syllabus And Other Exam Visit My Channel
TAIT च्या 30 प्रश्नपत्रिका PDF
BADSHAHimp Available Request 9765226781
YouTube WWW.YouTube.com/BADSHAHimp
Subscribe My Channel

9 सूचना : खालील प्रत्येक प्रश्नात दोन विधाने I आणि II दिलेले आहेत. हे विधान एकतर स्वतंत्र कारण असू शकतात किंवा स्वतंत्र कारणांचे परिणाम असू शकतात. यांपैकी एक विधान इतर विधानाचा परिणाम असू शकतो. दोन्ही विधाने वाचा आणि खालीलपैकी कोणत्या उत्तराचा पर्याय या दोन्ही विधानांमधील संबंधांचे वर्णन करतो ते ठरवा.

विधान :
I. X देशाने आपल्या नागरिकांसाठी पासपोर्ट अनिवार्य केला आहे.
II. X देशाला अवैध स्थलांतराच्या समस्येला तोंड द्यावे लागत आहे.

DIRECTIONS: Below in each question are given two statements I and II. These statements may be either independent causes or may be effects of independent causes. One of these statements may be the effect of the other statement. Read both the statements and decide which of the following answer choice correctly depicts the relationship between these two statements.

Statements:
I. Country X has made passport compulsory for its citizens.
II. Country X is facing problem of illegal migrants.

ہدایات: نیچے ہر سوال میں دو بیانات I اور II آزاد وجوہات یا پھر آزاد وجوہات کے اثرات ہو سکتے ہیں۔ ان دیے گئے ہیں۔ یہ بیانات یا تو بیانات میں سے ایک بیان دوسرے کا اثر ہو سکتا ہے۔دونوں بیانات پڑھیں اور فیصلہ کریں کہ نیچے دیے گئے کس جواب کا انتخاب ان دونوں بیانات کے در میان تعلق کو ٹھیک سے ظاہر کرتا ہے۔

بیانات:
I –X ملک نے اپنے شہریوں کے لیے پاسپورٹ لازمی کر دیا ہے۔
II - X ملک کو غیر قانونی امیگرینٹس کا مسئلہ درپیش ہے۔

A.विधान I कारण आहे आणि विधान II त्याचा परिणाम आहे;
A.Statement I is the cause and statement II is its effect;
A. بیان نمبر I وجہ ہے اور بیان نمبر II اس کا اثر ہے۔

B.विधान II कारण आहे आणि विधान I त्याचा परिणाम आहे;
B.Statement II is the cause and statement I is its effect;
B. بیان نمبر II وجہ ہے اور بیان نمبر I اس کا اثر ہے۔

C.विधान I आणि II दोन्ही स्वतंत्र कारणे आहेत;
C.Both the statements I and II are independent causes;
C. دونوں بیانات نمبر I اور نمبر II آزاد وجوہات ہیں۔

D.विधान I आणि II दोन्ही स्वतंत्र कारणांचे परिणाम आहेत;
D.Both the statements I and II are effects of independent causes;
D. دونوں بیانات نمبر I اور نمبر II آزاد وجوہات کے اثرات ہیں۔

Answer: B.विधान II कारण आहे आणि विधान I त्याचा परिणाम आहे;
B.Statement II is the cause and statement I is its effect;
B. بیان نمبر II وجہ ہے اور بیان نمبر I اس کا اثر ہے۔

For More Info And Videos About TAIT-Exam Syllabus And Other Exam Visit My Channel
TAIT च्या 30 प्रश्नपत्रिका PDF
BADSHAHimp Available Request 9765226781
YouTube WWW.YouTube.com/BADSHAHimp
Subscribe My Channel

10	‘त्या झाडाखाली काळा कुत्रा बसलेला आहे.’ या वाक्यातील विशेषण ओळखा.
	A.त्या
	B.झाडाखाली
	C.काळा
	D.कुत्रा
Answer:	C.काळा

11	सामान्य स्थितीत एखाद्या अर्भकाची बुद्धिमत्ता पातळी कशी उंचावली जाऊ शकते. How an infants intelligence level be increased under normal condition. عام حالات میں بچوں کی انٹلی جینس کی سطح کو کیسے بڑھایا جاسکتا ہے۔
	A.सुरक्षित वातावरण उपलब्ध करून दिल्याने A.providing a secure environment A.ایک محفوظ ماحول مہیا کراتے ہوئے
	B.मुलास इतरांपासून वेगळे ठेवल्याने B.keeping the child away from others B.بچے کو دوسرے سے دور رکھتے ہوئے
	C.नेहमी स्मितहास्य केल्याने C.smiling often C.ہمیشہ مسکراتے ہوئے
	D.(a) व (c) D.(a) and (c) D.((a اور (c)
Answer:	D.(a) व (c) D.(a) and (c) D.((a اور (c)

For More Info And Videos About TAIT-Exam Syllabus And Other Exam Visit My Channel
TAIT च्या 30 प्रश्नपत्रिका PDF
BADSHAHimp Available Request 9765226781
WWW.YouTube.com/BADSHAHimp
Subscribe My Channel

12 **प्रश्नातील आकृतीला खालीलपैकी कोणत्या उत्तर आकृत्या जोडलेल्या आहेत?**

Which of the answer figures is embedded in the question figure?

سوالیہ فیگر میں کونسا جوابی فیگر چھپا ہے؟

प्रश्न आकृती:

Question Figure:

سوالیہ فیگر:

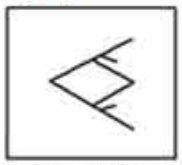

उत्तर आकृत्या:

Answer Figures:

جوابی فیگرز:

(A) 

(B) 

(C) 

(D) 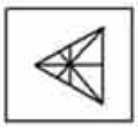

(a) (A)

(b) (B)

(c) (C)

(d) (D)

Answer: (b) (B)

13 खालीलपैकी शुद्ध वाक्य कोणते ?

A.तो दिवस चांगला गेली .

B.ती दिवस चांगला गेली.

C.ती दिवस चांगला गेला.

D.तो दिवस चांगला गेला.

Answer: D.तो दिवस चांगला गेला.

For More Info And Videos About TAIT-Exam Syllabus And Other Exam Visit My Channel
TAIT च्या 30 प्रश्नपत्रिका PDF
BADSHAHimp Available Request 9765226781
YouTube WWW.YouTube.com/BADSHAHimp
Subscribe My Channel

14	सरळ रूप द्या: 3972 + 7646 + 8791 + 2763 + 9437 =? Simplify: 3972 + 7646 + 8791 + 2763 + 9437 =? آسان بنائیں: 3972+7646+8791+2763+9437=?
	A.32609 A.32609 A.32609
	B.25630 B.25630 B.25630
	C.32405 C.32405 C.32405
	D.78512 D.78512 D.78512
Answer:	A.32609 A.32609 A.32609
15	5/12 चे टक्केवारीत रुपांतर करा. Convert 5/12 into percentage? 5/12 کو فی صد میں میں تبدیل کیجئے؟
	A.42% A.42% A.42%
	B.40% B.40% B.40%

C.41.67%

C.41.67%

C.41.67%

D.43%

D.43%

D.43%

Answer: C.41.67%

C.41.67%

C.41.67%

16 प्रारंभिक बाल्यावस्थेचा वयोगट काय आहे.

What is the age range of early adulthood.

ابتدائی بلوغت کے عمر کی اوسط کیا ہے۔

A.60-80
A.60-80
A.60-80

B.45-55
B.45-55
B.45-55

C.20-40
C.20-40
C.20-40

D.35-65
D.35-65
D.35-65

Answer: C.20-40
C.20-40
C.20-40

For More Info And Videos About TAIT-Exam Syllabus And Other Exam Visit My Channel
BADSHAHimp TAIT च्या 30 प्रश्नपत्रिका PDF Available Request 9765226781 WWW.YouTube.com/BADSHAHimp Subscribe My Channel

17 शिक्षकी पेशाच्या मानसिक आरोग्यासाठी सर्वात हानिकारक असलेला घटक म्हणजे कदाचित—

Probably the factor most detrimental to the Mental-health of the teaching profession is—

ممکنہ طور پر تدریسی پیشہ کے دماغی صحت کے لیے سب سے نقصان دہ عنصر ہے—

A.अतिअधिक शिकविण्याचा भार, उदा. मर्यादेबाहेर विद्यार्थी असलेला वर्ग
A.Excessive teacher load, e.g., overcrowded class-rooms
A.استاد پر ضرورت سے زیادہ بوجھ مثال کے طور پر بھرے ہوئے کلاس روم

B.आंतर-व्यक्तिगत संघर्ष
B.Inter-personal conflicts
B.ذاتی تنازعات

C.स्वतःला सृजनात्मक रितीने व्यक्त करण्याच्या संधीची कमतरता
C.Lack of opportunity to express oneself creatively
C.تخلیقی طور پر خود کا اظہار کرنے کے موقع کی کمی

D.एकसारखेपणातील नीरसता.
D.Monotony.
D.یک رنگی

Answer: D.एकसारखेपणातील नीरसता.
D.Monotony.
D.یک رنگی

18 Out of the given options, choose the most appropriate one to fill in the blank.
The boy _____on the burning deck.

A.stood

B.have stood

C.have stand

D.has stand

Answer: A.stood

For More Info And Videos About TAIT-Exam Syllabus And Other Exam Visit My Channel
TAIT च्या 30 प्रश्नपत्रिका PDF
BADSHAHimp Available Request 9765226781
WWW.YouTube.com/BADSHAHimp
Subscribe My Channel

19 एका विशिष्ट सांकेतिक भाषेमध्ये, जर PANCREAS हा शब्द SAERCNAP असा कूटबध्द केला जात असेल, STADIUM हा शब्द त्या भाषेत कसा कूटबध्द केला जाईल?

In a certain code language, if the word PANCREAS is coded as SAERCNAP, then how is the word STADIUM coded in that language?

ایک مخصوص ضابطے کی زبان میں، اگر لفظ PANCREAS کو SAERCNAP لکھاجاتاہے، تو اس زبان میں لفظ STADIUM کو کیسے لکھاجائیگا؟

A.MUDIATS
A.MUDIATS
A.MUDIATS

B.MUDIAST
B.MUDIAST
B.MUDIAST

C.MUIDATS
C.MUIDATS
C.MUIDATS

D.MIUDATS
D.MIUDATS
D.MIUDATS

Answer: C.MUIDATS
C.MUIDATS
C.MUIDATS

20 प्रश्नासाठी सूचना: खालील मालिका पूर्ण करा.

A, B, D, G,____,P

DIRECTION: Complete the following series.

A, B, D, G,____,P

ہدایت:مندرجہ ذیل سیریز کو مکمل کریں

A, B, D, G,____,P

A.K
A.K
A.K

B.T
B.T
B.T

C.L
C.L
C.L

D.H
D.H
D.H

Answer: A.K
A.K
A.K

21 निर्देश: खालील प्रश्नांमध्ये प्रश्न चिन्हाच्या (?) जागी कोणते अंदाजे मूल्य यायला हवे? (तुम्ही अचूक मूल्य काढण्याचे अपेक्षित नाही).
31÷3×15=?

DIRECTIONS: What approximate value should come in place of the question mark (?) in the following questions? (You are not expected to calculate the exact value)

31÷3×15=?

ہدایات: مندرجہ ذیل سوال میں سوال کا نشان (?) کی جگہ پر کون سا تخمینہ ویلیو آئے گا -
(آپ کو صحیح ویلیو نکالنے کی ضرورت نہیں ہے)
31÷3×15=?

A.150
A.150
A.150

B.160
B.160
B.160

C.180
C.180
C.180

D.140
D.140
D.140

Answer: A.150
A.150
A.150

For More Info And Videos About TAIT-Exam Syllabus And Other Exam Visit My Channel
BADSHAHimp TAIT च्या 30 प्रश्नपत्रिका PDF Available Request 9765226781
WWW.YouTube.com/BADSHAHimp Subscribe My Channel

22	सरळ रूप द्या: 12431 + 62143 = ? Simplify: 12431 + 62143 = ? آسان بنائیں: 12431 + 62143 = ?
	A.75574 A.75574 A.75574
	B.74474 B.74474 B.74474
	C.74564 C.74564 C.74564
	D.74574 D.74574 D.74574
Answer:	D.74574 D.74574 D.74574
23	तीन भिन्न संख्यांचा लसावी (एलसीएम) 120 आहे. खालीलपैकी कोणता त्यांचा मसावी (एचसीएफ) असू शकत नाही? The LCM of three different numbers is 120. Which of the following cannot be their HCF? تین مختلف نمبروں کا ایل سی ایم(LCM) ، 120 ہے۔ مندرجہ ذیل میں سے کون سی ایچ سی ایف (HCF) نہیں ہوسکتی ہے؟
	A.8 A.8 A.8
	B.12 B.12 B.12
	C.24 C.24 C.24

	D.35 D.35 D.35
Answer:	D.35 D.35 D.35

24	Fill in the blank with the correct article. He was _____first man to arrive
	A.the
	B.a
	C.an
	D.No article required
Answer:	A.the

25	खालीलपैकी शुद्ध शब्द कोणता ?
	A.गुरु
	B.गूरू
	C.गुरू
	D.गूरु
Answer:	C.गुरू

26	डब्लू डब्लू डब्लू चा अर्थ …… . WWW stands for _____ . WWW ------کا مطلب ہے

A.वर्ल्ड वर्क वेब
A.World Work Web
A.ورلڈ ورک ویب

B.वाईड वर्क वेब
B.Wide Work Web
B.وائڈ ورک ویب

C.वाईड वर्ल्ड वेब
C.Wide World Web
C.وائڈ ورلڈ ویب

D.वर्ल्ड वाईड वेब
D.World Wide Web
D.ورلڈ وائڈ ویب

Answer: D.वर्ल्ड वाईड वेब
D.World Wide Web
D.ورلڈ وائڈ ویب

27 मैत्रीमध्ये सुसंगत आधारावर आढळणारे मूल्य असे आहे:

Value that is found in friendships on a consistent basis is:

درج ذیل اقدار میں سے مسلسل بنیاد پر دوستی میں پایا جاتا ہے

A.सहानुभूती आणि सामानुभूती
A.Sympathy and empathy
A. ہمدردی اور رحم

B.प्रामाणिकपणा आणि विश्वास
B.Honesty & trust
B. ایمانداری اور اعتماد

C.परस्पर समज आणि करुणा
C.Mutual understanding and compassion
C. باہمی افہام و تفہیم اور شفقت

D.वरील सर्व
D.All the above
D. مندرجہ بالا تمام

Answer: D.वरील सर्व
D.All the above
D. مندرجہ بالا تمام

28	गुणाकार करा: 127 × 6 = ? Multiply: 127 × 6 = ? ضرب دیں: 127 × 6 = ?
	A.862 A.862 A.862
	B.762 B.762 B.762
	C.562 C.562 C.562
	D.662 D.662 D.662
Answer:	B.762 B.762 B.762
29	खालीलपैकी अशुद्ध शब्द कोणता ?
	A.गृह
	B.गृहकलह
	C.गृहस्थ
	D.गृहिनी
Answer:	D.गृहिनी

30 शिक्षकांसाठी सुरवातीत येणाऱ्या अपयशाचे सर्वात मोठे एकच कारण — च्या विभागात आहे

The greatest single cause of failure in beginning for teachers lies in the area of—

اساتذہ کے لیے شروعات میں ناکامی کی ایک سب سے بڑی وجہ اس علاقہ میں واقع ہے—

A.सर्वसाधारण संस्कृती
A.General culture
A.عمومی کلچر

B.सर्वसाधारण शिष्यवृत्ती
B.General scholarship
B.عام اسکالرشپ

C.विषय-वस्तुची पार्श्वभूमी
C.Subject-matter back ground
C.موضوع کا پس منظر

D.आंतर-व्यक्तिगत संबंध
D.Inter-personal relations
D.ذاتی تعلقات

Answer: D.आंतर-व्यक्तिगत संबंध
D.Inter-personal relations
D.ذاتی تعلقات

31 मुकेश आणि सुरेश यांच्या वयाचे गुणोत्तर 2 : 3 आहे. 12 वर्षांनंतर त्यांच्या वयाचे गुणोत्तर 11 : 15 होईल. सुरेशचे वय किती आहे (वर्षांमध्ये)?

The ratio of Mukesh's and Suresh's age is 2 : 3. After 12 years the ratio of their ages become 11 : 15. What is the age of Suresh (in years)?

مکیش اور سریش کی عمروں کا تناسب2 : 3 ہے،12 سال بعد ان کی عمروں کا تناسب11 : 15 بن جاتا ہے۔ سریش کی عمر(سال میں) کیا ہے؟

A.16
A.16
A.16

B.32
B.32
B.32

C.48
C.48
C.48

D.42
D.42
D.42

Answer: C.48
C.48
C.48

32

निर्देश: खाली एक कागदाचा तुकडा दर्शवला आहे. दिलेल्या उत्तर आकृत्यांमधून, घडी घातल्यास तो कसा दिसेल ते सूचित करा.

DIRECTIONS: A piece of paper is shown below. From the given answer figures, indicate how it will appear when it is folded?

ہدایت: نیچے کاغذ کا ایک ٹکڑا دکھایا گیا ہے۔ فراہم کردہ جوابی فیگر میں، بتائیں کہ یہ اس وقت کیسا دکھائی دے گا جب اس کو موڑا جائے گا؟



B. B

C. C

D. D

A. A

Answer: A. A

33

सूचना: खालील प्रश्नांमध्ये दिलेल्या पर्यायांमधून संबंधित अक्षर समूह निवडा.

HKNQ : GKOS :: SVYB : ?

DIRECTIONS: In the following question, select the related group of letters from the given alternatives.

HKNQ : GKOS :: SVYB : ?

سمت: مندرجہ ذیل سوال میں، دیے گئے متبادل میں سے حروف کا متعلقہ گروپ منتخب کریں۔

HKNQ : GKOS :: SVYB : ?

A.TQMK
A.TQMK
A.TQMK

B.NRVZ
B.NRVZ
B.NRVZ

C.ZVTQ
C.ZVTQ
C.ZVTQ

D.ADGJ
D.ADGJ
D.ADGJ

Answer: B.NRVZ
B.NRVZ
B.NRVZ

34 सूचना: खालील प्रश्नांमध्ये दिलेल्या पर्यायांमधून संबंधित अक्षर/शब्द/संख्या निवडा.

प्रोत्साहन देणे : प्रतिबंधित करणे: :?

DIRECTIONS: In the following question, select the related letter/word/number from the given alternatives.

Encourage : Restrict: :?

سمت: مندرجہ ذیل سوال میں، دیے گئے متبادل سے متعلقہ حرف/لفظ/نمبر منتخب کریں۔

حوصلہ افزائی کرنا: محدود کرنا: :؟

A.प्राप्ती यश
A.Gain: success
A.حاصل کرنا: کامیابی

B.अभाव: आधिक्य
B.Dearth: surplus
B.گرانی: زائد از ضرورت

C.पाहणे: विश्वास ठेवणे
C.Seeing: believing
C.دیکھنا: یقین کرنا

D.हृदय आत्मा
D.Heart: soul
D.دل: روح

Answer: B.अभाव: आधिक्य
B.Dearth: surplus
B.گرانی: زائد از ضرورت

35 साधारणपणे, असे दिसून येते की विद्यार्थी त्यांचे शिल्लक अन्न आणि त्याचे पॅकींग वर्गाच्या फर्निचरमध्ये, बागेत आणि शाळेच्या जमीनीवर टाकून देतात जे तुम्हाला वाटते की ती चुकीची प्रथा आहे. तुम्ही त्यांना कसे रोखाल म्हणजे शाळेचा परिसर स्वच्छ ठेवण्यासाठी त्यांना एक योग्य दृष्टीकोन मिळेल?

Generally, it is found that the students are littering their food remains and wrappings in class furniture, parks and school floors which you think a wrong practice. How would you check them so that they have a right approach to keep clean the school surroundings?

عام طور پر، یہ پایا گیا ہے کہ طلبا اپنے بچے ہوئے کھانے اور پیکٹ کو کلاس کے فرنیچر، پارکوں میں اور اسکول کے فرش پر پھینک دیتے ہیں جو آپ کے خیال میں ایک غلط عمل ہے۔ آپ انھیں کیسے چیک کریں کے تاکہ اسکول کے آس پاس صفائی رکھنے کے لیے ان کے پاس درست طریقہ ہو؟

A.चुकीचे वर्तन करणाऱ्यांवर नजर ठेवण्यासाठी आणि त्यांना रोखण्यासाठी काही मॉनिटर विद्यार्थ्यांचा एक उडता गट तयार करणे
A.Organize a flying group of monitors to see and check the wrong doers
A.غلطی کرنے والوں کو دیکھنے اور چیک کرنے کے لیے ایک نگراں گروپ منظم کریں

B.ते टाळण्यासाठी एकत्र येण्याच्या मैदानावर दररोज घोषणा करणे
B.Announcements on assembly ground every day to avoid it
B.اس سے بچنے کے لیے روزانہ اسمبلی گراؤنڈ میں اعلانات

C.वर्गासमोर, बागा आणि परिसरातील इतर ठिकाणी कचरा-पेट्यांची व्यवस्था करणे
C.Arrangement of dust-bins in front of class-rooms, parks and other places in the campus
C.کلاس روم، پارکوں اور کیمپس میں دیگر جگہوں کے سامنے کوڑے دان کا انتظام

D.अशा विद्यार्थ्यांसाठी आर्थिक शिक्षा देणे.
D.Make a provision of financial punishment for these students.
D.ان طلبا کے لیے مالیاتی سزا کی کارروائی کریں۔

Answer: C.वर्गासमोर, बागा आणि परिसरातील इतर ठिकाणी कचरा-पेट्यांची व्यवस्था करणे
C.Arrangement of dust-bins in front of class-rooms, parks and other places in the campus
C.کلاس روم، پارکوں اور کیمپس میں دیگر جگہوں کے سامنے کوڑے دان کا انتظام

36 $\sqrt{400} + \sqrt{900} + \sqrt{1600}$ चे मूल्य आहे:

The value of $\sqrt{400} + \sqrt{900} + \sqrt{1600}$ is:

$\sqrt{400} + \sqrt{900} + \sqrt{1600}$ کی قدر ہے:

A. 22

	B. 90
	C. 20
	D. 28
Answer:	B. 90

37	ढग मुळात याने बनलेले आहेत ____ Clouds are basically made up of ____ بادل بنیادی طور پر _____ سے بنتے ہیں
	A.पाण्याचे थेंब A.Droplets of water A.پانی کی بوندوں
	B.धुळ B.Dust B.دھول
	C.प्रकाश C.Light C.روشنی
	D.पांढरा रंग D.White color D.سفید رنگ
Answer:	A.पाण्याचे थेंब A.Droplets of water A.پانی کی بوندوں

38	बौद्धिक चाचण्या बुद्धीमत्तेचे मोजमाप— द्वारे घेतात Intelligence tests measure intelligence by— —ذہانت کے ٹیسٹ ذہانت کی پیمائش کرتے ہیں بذریعہ
	A.एखादा जे काही शिकला आहे त्या सर्वांची यादी बनवून A.Inventorying everything, one has learned A.جو کچھ سیکھا ہے، ان سب کی فہرست بنانا

B.एखाद्याने अनुभवलेल्या सर्वात कठीण शिक्षणाचे निरीक्षण करून
B.Observing the most difficult learnings, one has encountered
B.تجربے میں آنے والے، سب سے مشکل آموزش کا مشاہدہ

C.शिकण्याचे नमुने बनवून, जे शिकण्याची जवळजवळ प्रत्येकजणाला संधी मिळालेली आहे
C.Sampling learnings, which almost everyone has had an opportunity to learn
C.نونہال آموزش، جسے سیکھنے کا تقریباً ہر کسی کو ایک موقع ملا تھا

D.एखाद्याच्या मज्जासंस्थेच्या संरचनेचे द्रव्यमान आणि गुंतागुंतीचे निरीक्षण करणे
D.Observing the mass and complexity of one's neural structure
D.کسی کے اعصابی ڈھانچہ کی پیچیدگی کا مشاہدہ

Answer: D.एखाद्याच्या मज्जासंस्थेच्या संरचनेचे द्रव्यमान आणि गुंतागुंतीचे निरीक्षण करणे
D.Observing the mass and complexity of one's neural structure
D.کسی کے اعصابی ڈھانچہ کی پیچیدگی کا مشاہدہ

39 सूचना: दिलेल्या पर्यायांमधून वेगळे ते बाहेर काढा.

DIRECTIONS: Find the odd one out from the given alternatives.

سمت: دیے گئے متبادل میں سے بے جوڑ کو تلاش کرو۔

A.A
A.A
A.A

B.R
B.R
B.R

C.E
C.E
C.E

D.I
D.I
D.I

Answer: B.R
B.R
B.R

40 रवी आणि अजय यांनी सारखे ठिकाण A पासून सुरूवात केली आणि ते B या ठिकाणी पोहचले, ते 60 किमी दूर आहे. रवीचा गती अजयच्या गतीपेक्षा 4 किमी/तास ने कमी आहे. B या ठिकाणी पोहचून अजय, परत येतो आणि रवीला B पासून 12 किमी दूर असलेल्या ठिकाणी भेटतो. रवीची गती (किमी/तास मध्ये) काढा.

Ravi and Ajay start simultaneously from the same place A and reach at place B, 60 km apart. Ravi's speed is 4 km/hr less than that of Ajay. Ajay, after reaching place B, returns and meets Ravi at a place 12 km away from B. Find the speed (in km/hr) of Ravi.

روی اور اجے نے ایک ہی جگہ A سے 60 کلو میٹر دور جگہ B سے ایک ساتھ شروع کیا اور تک پہنچے۔ روی کی رفتار اجے کی رفتار سے 4 کلومیٹر فی گھنٹہ کم ہے۔ اجے جگہ B پر پہنچنے کے بعد واپس مڑتا ہے اور جگہ B سے 12 کلومیٹر دور جگہ پر روی سے ملتا ہے۔ روی کی رفتار (کلومیٹر / گھنٹہ میں) معلوم کریں.

A.12
A.12
A.12

B.10
B.10
B.10

C.8
C.8
C.8

D.6
D.6
D.6

Answer: C.8
C.8
C.8

41 निर्देश: खाली दिलेले प्रश्न वर्ण मालिकेवर आधारित आहेत. या प्रत्येक मालिकेत, काही अक्षरे गहाळ आहेत. योग्य पर्याय निवडा पाच पेक्षा अधिक अक्षरे गहाळ असल्यास, मालिकेतील शेवटचे पाच अक्षरे निवडा .

a b - - - - - d - a - - - - -

DIRECTION: Questions given below are based on the letter series. In each of these series, some letters are missing. Select the correct alternative. If more than five letters are missing, select the last five letters of the series:

a b - - - - - d - a - - - - -

ہدایت نیچے دے ہے سوالات حرف سرج پر مشتمل ہیں . ہر میں کہیں حرف گمشدہ ہے . سہی اختیارات کو چنے . اگر پچ حرف گنمام ہو تو آخری پانچ حرفونکو چنے

a b - - - - - d - a - - - - -

A.dabce
A.dabce
A.dabce

B.eabcd
B.eabcd
B.eabcd

C.edcba
C.edcba
C.edcba

D.cdeab
D.cdeab
D.cdeab

Answer: D.cdeab
D.cdeab
D.cdeab

42 जर तुमच्या सहकाऱ्याला अश्लिल चित्रपट पाहाण्यात औत्सुक्य आहे आणि तुम्ही त्याला तुमच्या घरासह तुमची उपकरणे जसे, व्हीसीआर आणि टिव्ही सेट वापरू देण्यासाठी तो तुमचे मन वळवतो, तुम्ही या लाजीरवाण्या स्थितीतून कशी सुटका करून घ्याल?

If your colleague takes interest in blue films and convinces you to lend him your appliances like, VCR and TV set along with your house, how could you escape from this awkward situation?

اگر آپ کا ساتھی بلو فلموں میں دلچسپی رکھتا ہے اور آپ کو اپنے گھر کے ساتھ ساتھ اپنے آلات جیسے وی سی آر اور ٹی وی سیٹ ادھار دینے کے لیے قائل کرتا ہے، تو آپ اس عجیب صورتحال سے کیسے بچ سکتے ہیں؟

A.तुम्ही त्याला पटवाल की तुम्ही या बाबतीत त्याची मदत करू शकत नाही
A.You will convince him that you can’t extend your help in this matter
A.آپ اسے قائل کریں گے کہ اس معاملے میں آپ اس کی مدد نہیں کر سکتے

B.तुम्हाला त्याची इच्छा पुढे ढकलायला आवडेल कारण तुमच्याकडे त्याला थेट नकार देण्यासाठी पुरेसे धैर्य नाही
B.You will like to postpone his wish as you do not have enough courage to refuse him directly
B.آپ اس کی خواہش کو ملتوی کرنا چاہیں گے کیونکہ اسے براہ راست منع کرنے کے لیے آپ میں حوصلہ نہیں ہے

C.तुम्ही बेकायदेशीर कृतींविषयी अतिशय भीती बाळगता, त्यामुळे कॅसेट वगैरेची व्यवस्था करण्यात असमर्थ असता त्यामुळे तुम्ही त्याला नकार देता
C.You are very afraid of illegal acts, therefore unable to manage cassettes etc. in turn you refuse him
C.آپ غیر قانونی کاموں سے بہت ڈرتے ہیں، لہٰذا کیسٹ وغیرہ کا انتظام نہیں کر سکتے ہیں اس لیے آپ اسے منع کر دیتے ہیں

D.तुम्हाला या वयातील त्याच्या रानटी भावना आणि जाणिवांविषयी वाईट वाटेल
D.You will feel sorry on his vicious feelings and emotions in this age.
D.آپ اس عمر میں اس کے شدید احساسات اور جذبات پر افسوس کریں گے۔

Answer: A.तुम्ही त्याला पटवाल की तुम्ही या बाबतीत त्याची मदत करू शकत नाही
A.You will convince him that you can't extend your help in this matter
A.آپ اسے قائل کریں گے کہ اس معاملے میں آپ اس کی مدد نہیں کر سکتے

43 धन पूर्ण अपूर्णांक आणि त्याच्या व्युत्क्रमामधील धन फरक 85/66 आहे. तो अपूर्णांक काय असेल:

The positive difference between a positive proper fraction and its reciprocal is 85/66. The fraction is:

مثبت درست کسر اور اس کے ریسپروکل کے درمیان مثبت فرق ہے 85/66 - کسر ہے:

A.3/10
A.3/10
A.3/10

B.6/11
B.6/11
B.6/11

C.4/13
C.4/13
C.4/13

D.5/9
D.5/9
D.5/9

Answer: B.6/11
B.6/11
B.6/11

44 'हुशार' या शब्दाचा विरुद्धार्थी शब्द कोणता ?

A.चलाख

B.निर्बुद्ध

C.शहाणा

D.बुद्धिमान

Answer: B.निर्बुद्ध

45 निर्देश: खालील शब्दांची इंग्रजी शब्दकोशानुसार मांडणी करा.
(1) Host
(2) Haphazard
(3) Haste
(4) Hang
(5) Handkerchief

DIRECTIONS: Arrange the following words according to the English Dictionary.
(1) Host
(2) Haphazard
(3) Haste
(4) Hang
(5) Handkerchief

ہدایات: انگریزی لغت کے مطابق مندرجہ ذیل الفاظ کو مرتب کریں۔
(1) Host
(2) Haphazard
(3) Haste
(4) Hang
(5) Handkerchief

A.5, 4, 2, 3, 1
A.5, 4, 2, 3, 1
A.5, 4, 2, 3, 1

B.5, 4, 2, 1, 3
B.5, 4, 2, 1, 3
B.5, 4, 2, 1, 3

C.4, 3, 2, 1, 5
C.4, 3, 2, 1, 5
C.4, 3, 2, 1, 5

D.3, 2, 1, 5, 4
D.3, 2, 1, 5, 4
D.3, 2, 1, 5, 4

Answer: A.5, 4, 2, 3, 1
A.5, 4, 2, 3, 1
A.5, 4, 2, 3, 1

46 एक मुल मागच्या बाकावर बसते आणि फळा स्पष्टपणे पाहू शकत नाही, त्यामुळे, तो वारंवार उभा राहातो, पाहातो आणि बसतो. त्यामुळे जवळच्या बाकावर बसलेल्या इतर वर्गमित्रांना त्रास होतो. या विद्यार्थ्याच्या अडचणीसंबंधाने तुम्ही कोणते अनुमान काढाल?

A child is a back-bencher and is unable to watch the black-board clearly, therefore, he stands, sees and sits repeatedly. It disturbs the nearby class-mates, what inference will you draw with reference to the student's difficulty?

ایک بچہ پچھلی نشست پر بیٹھا ہے اور بلیک بورڈ کو واضح طور پر دیکھنے سے قاصر ہے، لہذا، وہ بار بار کھڑا ہوتا ہے، دیکھتا ہے اور بیٹھتا ہے۔ اس سے آس پاس کے کلاس کے ساتھیوں کو پریشانی ہوتی ہے، طالب علم کی دشواری کے حوالے سے آپ کیا نتیجہ اخذ کریں گے؟

A.मुलाची दृष्टी कमजोर आहे
A.The child has poor eye-sight
A.بچہ کی نظر خراب ہے

B.मुलाच्या डोळ्यांमध्ये दोष असू शकतो
B.The child may has defective eyes
B.بچہ کی آنکھ ناقص ہو سکتی ہے

C.फळ्यावर प्रकाशाचा चमकता परिणाम दिसत असू शकतो
C.The black-board may has shining effect of light
C.بلیک بورڈ پر روشنی کی چمک کا اثر ہو سکتا ہے

D.मुल खोडी करत आहे
D.The child is creating mischief.
D.بچہ شرارت کر رہا ہے۔

Answer: A.मुलाची दृष्टी कमजोर आहे
A.The child has poor eye-sight
A.بچہ کی نظر خراب ہے

47 सूचना: खालील माहिती काळजीपूर्वक वाचा आणि खालील प्रश्नांची उत्तरे द्या:
I. A, B, C, D, E, F, G आणि H केंद्रासमोर बघत एका वर्तुळात बसलेले आठ मित्र आहेत.
II. F हा D च्या तत्काळ उजव्या बाजूला आहे तर, B हा E च्या तत्काळ डाव्या बाजूला आहे.
III. A हा C च्या किंवा H च्या समोर बसलेला नाही आणि A हा H चा शेजारी पण नाही.
IV. E आणि H, C च्या बाजूला बसलेले आहेत.
G ची स्थिती काय आहे?

DIRECTIONS: Study the following information carefully and answer the questions given below.
I. A, B, C, D, E, F, G and H are eight friends sitting in a circle facing the centre.
II. F is on the immediate right of D while B is on the immediate left of E.
III. A is sitting opposite to neither C nor H. And A is not the neighbour of H.
IV. E and H are sitting adjacent to C.
What is the position of G?

ہدایات: مندرجہ ذیل معلومات کو دھیان سے پڑھیں اور نیچے دیے گئے سوالوں کے جواب دیں۔
Iایک دائرے میں مرکز کی طرف رخ کیے ہوئے بیٹھے ہیں۔ H اور A، B، C، D، E، F، G ۔ آٹھ دوست
II- F کے بائیں طرف ہے۔ E فوری طور پر B کے دائیں طرف ہے جبکہ D فوری طور پر
III- A کا پڑوسی نہیں ہے۔ H ، Aکے مخالف بیٹھا ہے۔ اور H کے نہ ہی C نہ تو
IV- E اور H دونوں C کے بغل میں بیٹھے ہیں۔
G کی پوزیشن کیا ہے؟

A.F च्या डावीकडे चौथा
A.Fourth to the left of F
A. F کے بائیں سے چوتھا

B.B च्या डावीकडे तिसरा
B.Third to the left of B
B.B کے بائیں سے تیسرا

C.B च्या उजवीकडे तिसरा
C.Third to the right of B
C.B کے دائیں سے تیسرا

D.D च्या डावीकडे दुसरे स्थान
D.Second to the left of D
D.D کے دائیں سے دوسرا

Answer: D.D च्या डावीकडे दुसरे स्थान
D.Second to the left of D
D.D کے دائیں سے دوسرا

48 ‘TENDENTIOUS’ पासून खालील शब्दांपैकी कोणते शब्द तयार केले जाऊ शकत नाहीत?

Which of the following words cannot be formed from ‘TENDENTIOUS’?

مندرجہ ذیل الفاظ میں سے کونسا 'TENDENTIOUS' سے نہیں بنایا جاسکتا ہے؟

A.INTENTION
A.INTENTION
A.INTENTION

B.DENTIST
B.DENTIST
B.DENTIST

C.TENT
C.TENT
C.TENT

D.STUDENT
D.STUDENT
D.STUDENT

Answer: A.INTENTION
A.INTENTION
A.INTENTION

49 Out of the given four words only one is not spelt correctly. Find the word that is not correctly spelt.

A.Anouncment

B.Achievement

C.Advertisement

D.Appearance

Answer: A.Anouncment

50 जर नारिंगीला लाल म्हटले, लालला पिवळा म्हटले, पिवळ्याला गुलाबी म्हटले, गुलाबीला निळा म्हटले, निळ्याला गडद जांभळा म्हटले आणि गडद जांभळ्याला जांभळा म्हटले. तर केळ्याचा रंग कोणता असेल?

If orange is called red, red is called yellow, yellow is called pink, pink is called blue, blue is called violet and violet is called purple. What will be the colour of a banana?

اگر نارنگی کو سرخ، سرخ کو زرد، زرد کو گلابی، گلابی کو نیلا، نیلا کو بنفشی اور بنفشی کو جامنی کہاجائے توکیلے کا رنگ کیا ہوگا؟

A.पिवळा
A.Yellow
A.زرد

B.गुलाबी
B.Pink
B.گلابی

C.लाल
C.Red
C.سرخ

D.निळा
D.Blue
D.نیلا

Answer: B.गुलाबी
B.Pink
B.گلابی

51 खालील आकृतीमध्ये, जर s < 50°< t, तर:
In the figure below, if s < 50°< t, then:
ذیل میں، اگر s < 50°< t، تو:

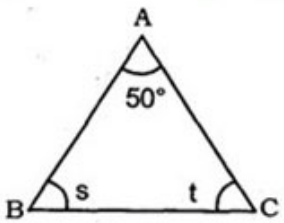

A. t < 80

B. s + t < 130

C. 50 < t < 80

D. t > 80

Answer: D. t > 80

52 जीन पियाजे हा मूळ____ चा प्रख्यात मानसशास्त्रज्ञ आहे

Jean Piaget a well-known psychologist of_____ in origin

معروف ماہر نفسیات جین پیاجیٹ کا تعلق کہاں سے تھا

A.डच
A.Dutch
A.ڈچ

B.स्विस
B.Swiss
B.سوئس

C.रशियन
C.Russian
C.روسی

D.ब्रिटीश
D.British
D.برطانوی

Answer: B.स्विस
B.Swiss
B.سوئس

53 $3\frac{1}{8}$ या व्याज दराने एका रकमेवरील सरळ व्याज मुद्दलेच्या $\frac{3}{8}$ होण्यासाठी किती वर्षे लागतील?

In what time the simple interest on a sum of money be $\frac{3}{8}$ of the principal with rate of interest $3\frac{1}{8}$?

$3\frac{1}{8}$ کی در کے ساتھ سود مفرد پر سود $\frac{3}{8}$ اصل کی ایک مبلغ رقم کتنے وقت میں ہوگا؟

A. 9 years
A. 9 वर्षे
A. 9 سال

B. 6 years
B. 6 वर्षे
B. 6 سال

C. 12 years
C. 12 वर्षे
C. 12 سال

D. 15 years
D. 15 वर्षे
D. 15 سال

Answer: C. 12 years
C. 12 वर्षे
C. 12 سال

54	भक्षक वनस्पतीमध्ये,भक्ष यामध्ये सुधारणा करून तयार केले जाते: In a pitcher plant, the pitcher is made by modification of پچرپلانٹ میں، پچر کی ------ ترمیم سے بنتا ہے
	A.पान A.leaf A. پتہ
	B.शाखा B.branches B. شاخ
	C.देठ C.stem C.تنا
	D.फुले D.flower D. پھول
Answer:	A.पान A.leaf A. پتہ

55 सूचना: अर्थपूर्ण परिच्छेद निर्माण करण्यासाठी, खाली दिलेली (P), (Q) (R), (S) आणि (T) ही पाच वाक्ये योग्यअनुक्रमाने पुनर्रचना करा; त्यांनतर खालील प्रश्नांची उत्तर द्या.

P. कावळ्याने गाण्याला सुरुवात केली.
Q. कावळ्याने चीज टाकून दिले.
R. कोल्ह्याने कावळ्याच्या गायनाची स्तुती केली.
S. तोंडात चीजचा तुकडा घेऊन एक कावळा झाडावर बसल्याचे कोल्ह्याने पाहिले.
T. स्तुतीने कावळा खूश झाला.

पुनर्रचना केल्यानंतर खालीलपैकी कोणते वाक्य पाचवे असेल?

DIRECTION: Rearrange the following five sentences (P), (Q), (R), (S) and (T) in the proper sequence to form a meaningful paragraph; then answer the questions given below them.
P. The crow began to sing.
Q. The crow dropped the cheese.
R. The fox praised the crow's singing.
S. A fox saw a crow sitting on a tree with a piece of cheese in his mouth.
T. The crow was pleased by the flattery.

Which of the following should be the FIFTH sentence after rearrangement?

ہدایات: ان پانچ جملوں (P)، (Q)، (R)، (S) اور (T) کو با معنی پیرا بنانے کے لئے دوبارہ ترتیب دیجئے، پھر نیچے دے گئے سوالوں کے جواب دیجئے.

P. کوے نے گانا شرو کیا.
Q. کوے نے پنیر گرا دی.
R. لومڑی نے کوے کے گانے کی تعریف کی.
S. ایک لومڑی نے دیکھا کوا منہ میں پنیر لئے پیڑ پر بیٹھا تھا.
T. کو ا تعریف سن کے خوش ہوا.

دوبارہ ترییب دینے کے بعد کون سا جملہ پانچوا ہونا چاہیے؟

A.Q
A.Q
A.Q

B.S
B.S
B.S

C.R
C.R
C.R

D.T
D.T
D.T

Answer: A.Q
A.Q
A.Q

56 सूचना : खालील प्रत्येक प्रश्नात दोन विधाने I आणि II दिलेले आहेत. हे विधान एकतर स्वतंत्र कारण असू शकतात किंवा स्वतंत्र कारणांचे परिणाम असू शकतात. यांपैकी एक विधान इतर विधानाचा परिणाम असू शकतो. दोन्ही विधाने वाचा आणि खालीलपैकी कोणत्या उत्तराचा पर्याय या दोन्ही विधानांमधील संबंधांचे वर्णन करतो ते ठरवा.

विधान :
I. पंतप्रधानांनी दुष्काळग्रस्त भागांचा आढावा घेतला आणि शेतकऱ्यांना मदत करण्यासाठी सरकारकडून साहाय्य करण्याचे आश्वासन दिले.
II. दुष्काळग्रस्त भागातील मोठ्या प्रमाणात शेतकरी दुःख सहन करीत आहेत आणि त्यांच्या कुटुंबियांना पोसणे त्यांना अशक्य आहे.

DIRECTIONS: Below in each question are given two statements I and II. These statements may be either independent causes or may be effects of independent causes. One of these statements may be the effect of the other statement. Read both the statements and decide which of the following answer choice correctly depicts the relationship between these two statements.

Statements:
I. The Prime Minister has visited the draught affected areas and promised government assistance to help the farmers.
II. A large number of farmers in the draught affected areas have been suffering and are unable to feed their Families.

زاد وجوہات یا پھر آزاد وجوہات کے اثرات ہو سکتے ہیں۔ انہیں گئے ہیں۔ یہ بیانات یا تو آ II اور I ہدایات: نیچے ہر سوال میں دو بیانات بیانات میں سے ایک بیان دوسرے کا اثر ہو سکتا ہے۔دونوں بیانات پڑھیں اور فیصلہ کریں کہ نیچے دیے گئے کس جواب کا انتخاب ان دونوں بیانات کے در میان تعلق کو ٹھیک سے ظاہر کرتا ہے۔

بیانات:
I۔وزیراعظم نے قحط سے متاثرہ علاقوں کا دورہ کیا اور کسانوں کو حکومتی امداد کی یقین دہانی کرائی۔
II۔ قحط سے متاثرہ علاقوں میں کسانوں کی ایک بڑی تعداد مشکلات کا شکار ہے اور وہ اپنےخاندانوں کی کفالت کرنے کے قابل نہیں۔

A.विधान I कारण आहे आणि विधान II त्याचा परिणाम आहे.
A.Statement I is the cause and statement II is its effect.
A. بیان نمبر I وجہ ہے اور بیان نمبر II اس کا اثرہے۔

B.विधान II कारण आहे आणि विधान I त्याचा परिणाम आहे.
B.Statement II is the cause and statement I is its effect.
B. بیان نمبر II وجہ ہے اور بیان نمبر I اس کا اثرہے۔

C.विधान I आणि II दोन्ही स्वतंत्र कारणे आहेत.
C.Both the statements I and II are independent causes.
C. دونوں بیانات I اور II آزاد وجوہات ہیں۔

D.विधान I आणि II दोन्ही काही सामान्य कारणांचे परिणाम आहेत.
D.Both the statements I and II are effects of some common cause.
D. کسی ایک وجہ کے اثرات ہیں۔ II اور I دونوں بیانات

Answer: D.विधान I आणि II दोन्ही काही सामान्य कारणांचे परिणाम आहेत.
D.Both the statements I and II are effects of some common cause.
D. کسی ایک وجہ کے اثرات ہیں۔ II اور I دونوں بیانات

57 पुढील जोडशब्द पूर्ण करा . 'पाऊस ------'

A.सरी

B.माऊस

C.पाणी

D.पाझर

Answer: C.पाणी

58 सूचना: खालील माहिती काळजीपूर्वक वाचा आणि खालील प्रश्नांची उत्तरे द्या:
I. A, B, C, D, E, F, G आणि H केंद्रासमोर बघत एका वर्तुळात बसलेले आठ मित्र आहेत.
II. F हा D च्या तत्काळ उजव्या बाजूला आहे तर, B हा E च्या तत्काळ डाव्या बाजूला आहे.
III. A हा C च्या किंवा H च्या समोर बसलेला नाही आणि A हा H चा शेजारी पण नाही.
IV. E आणि H, C च्या बाजूला बसलेले आहेत.
जर A आणि E जागा अदलाबदली करतात तसेच, F आणि H सुद्धा करत

DIRECTIONS: Study the following information carefully and answer the questions given below.
I. A, B, C, D, E, F, G and H are eight friends sitting in a circle facing the centre.
II. F is on the immediate right of D while B is on the immediate left of E.
III. A is sitting opposite to neither C nor H. And A is not the neighbour of H.
IV. E and H are sitting adjacent to C.
If A and E interchange places and same for F and H, then

ہدایات: مندرجہ ذیل معلومات کو دھیان سے پڑھیں اور نیچے دیے گئے سوالوں کے جواب دیں۔
Iایک دائرے میں مرکز کی طرف رخ کیے ہوئے بیٹھے ہیں۔ H اور A، B، C، D، E، F، G - آٹھ دوست
II- F کے بائیں طرف ہے۔ E فوری طور پر B کے دائیں طرف ہے جبکہ D فوری طور پر
III- A کا پڑوسی نہیں ہے۔ H ، Aکے مخالف بیٹھا ہے۔ اور H کے نہ ہی C نہ تو
IV- E اور H دونوں C کے بغل میں بیٹھے ہیں۔
اگر A اور E اپنی جگہیں بدل لیں اور اسی طرح F اور Hبھی، تو پھر

A.असतील तर, G आणि C हे F च्या बाजूला आहेत
A.G and C are adjacent to F
A.G اورC ، F کے بغل میں ہیں

B.असतील तर, D आणि B हे A च्या बाजूला आहेत
B.D and B are adjacent to A
B.D اور B، A کے بغل میں ہیں

C.E हा A च्या समोर बसलेला नाही
C.E is not sitting opposite A
C.E ، A کے مخالف نہیں بیٹھا ہے

D.H हा F च्या समोर बसलेला नाही
D.H is not sitting opposite F
D.H ، F کے مخالف نہیں بیٹھا ہے

Answer: A.असतील तर, G आणि C हे F च्या बाजूला आहेत
A.G and C are adjacent to F
A.G اورC ، F کے بغل میں ہیں

59 $\sqrt[2]{676} = ?$

A. 35

B. 26

C. 40

D. 42

Answer: B. 26

60 ऑस्कर पुरस्कार हा कोणत्या क्षेत्रात दिला जातो –

The Oscar Prize is given in the field of –

آسکر انعام _____ کے میدان میں دیا جاتا ہے۔

A.सिनेमा
A.Films
A.فلم

B.पत्रकारिता
B.Journalism
B.جرنلزم

C.लेखन
C.Writing
C.رائٹنگ

D.यांपैकी कोणतेही नाही
D.None of these
D.ان میں سے کوئی نہیں

Answer:
A.सिनेमा
A.Films
A.فلم

61 एक बॉल पेन तत्त्वावर कार्य करते—

A ball-pen acts on the principle of—

بال پین _____ کے اصول پر کام کرتا ہے

A.पृष्ठावरील तान
A.Surface tension
A. سرفیس ٹینشن (سطحی تناؤ)

B.गुरूत्वाकर्षण
B.Gravitation
B. گریویٹیشن (ثقالت)

C.वरील दोन्ही
C.Both of the above
C. ان میں سے دونوں

D.यापैकी एकही नाही
D.None of these
D. ان میں سے کوئی بھی نہیں

Answer:
C.वरील दोन्ही
C.Both of the above
C. ان میں سے دونوں

62 एखादे मूल जगास धोकादायक जागा समजत असल्यास त्याने याचा अनुभव घेतलेला असतो.

A child regarding the world as a dangerous place has experienced.

ایک بچہ جس نے دنیا سے متعلق بطور خطرناک جگہ کا تجربہ کیا ہے۔

A.बालपणी आघात
A.childhood trauma
A.بچپن کا صدمہ

B.घरगुती हिंसाचार
B.domestic violence
B.گھریلو تشدد

C.दादागिरी
C.Bullying
C.غنڈہ گردی

D.वरीलपैकी सर्व
D.all of above
D.درج بالا سبھی

Answer: D.वरीलपैकी सर्व
D.all of above
D.درج بالا سبھی

63 सूचना: प्रत्येक प्रश्नाला एक प्रमुख विधानासोबत चार विधाने आहेत ज्यांच्याखाली a, b, c, आणि d असे चार विधान आहेत. क्रमवार विधानांची जोडी निवडा ज्यामध्ये प्रथम विधान दुसऱ्या विधानाला सुचवते, आणि दोन्ही विधाने तर्किकदृष्ट्या प्रमुख विधानासोबत निगडित असेल.

आकाश आज काळे किंवा ढगाळ आहे.
A. ते काळे आहे.
B. ते काळे नाही.
C. ते ढगाळ आहे.
D. ते ढगाळ नाही.

DIRECTIONS: Each question has a main statement followed by four statements labelled A, B, C and D. Choose the ordered pair of statements, where the first statement implies the second, and the two statements are logically consistent with the main statement.

It is either dark or cloudy
A. It is dark
B. It is not dark
C. It is cloudy
D. It is not cloudy

ہدایت: ہر سوال میں ایک جملہ ہے جسکے بعد چار جملےاے، بی،سی اور ڈی کے نام سے دئے گئے ہیں اسمیں منسلک جوڑیوں کو چنئے۔ جہاں پہلا جملہ دوسرے جملہ کی اور اشارہ کر رہا ہے اور دو جملے منطقی مرکزی بیان کے مطابق ہیں

یہ یا تو اندھیرا ہے یا بادل ہیں
A۔ یہ اندھیرا ہے
B۔ یہ اندھیرا نہیں ہے
C۔ یہ بادل ہیں
D۔ یہ بادل نہیں ہیں

A.AC
A.AC
A.AC

B.DA
B.DA
B.DA

C.CB
C.CB
C.CB

D.AB
D.AB
D.AB

Answer: B.DA
B.DA
B.DA

64	Out of the given options, choose the one which is the correct indirect speech of the sentence given below. Sameer said. “I am very busy now.”
	A.Sameer said that he was very busy then.
	B.Sameer said that he was very busy now.
	C.Sameer said that he were being very busy then.
	D.Sameer says that he is very busy now.
Answer:	A.Sameer said that he was very busy then.

65	भारतातील हिमालयाचे उच्च शिखर कोणते? Name the highest peak of the Himalayas in India نام بھارت میں ہمالیہ کی بلند ترین چوٹی
	A.के 2 A.K2 A. K2
	B.माउंट. एव्हरेस्ट B.Mt. Everest B. ماؤنٹ ایورسٹ
	C.माउंट. कंचनजंगा C.Mt. Kanchenjunga C. ماؤنٹ کنچنجنگا
	D.माउंट. धौलगिरि D.Mt. Dhaulagiri D.مائونٹ دھولاگیری
Answer:	A.के 2 A.K2 A. K2

66

सोडवा $\frac{(238+131)^2+(238-131)^2}{238\times238+131\times131}$:

Solve $\frac{(238+131)^2+(238-131)^2}{238\times238+131\times131}$:

حل کریں $\frac{(238+131)^2+(238-131)^2}{238\times238+131\times131}$:

A. 4

B. 2

C. 8

D. 9

Answer: B. 2

67 सूचना: अर्थपूर्ण परिच्छेद निर्माण करण्यासाठी, खाली दिलेली (P), (Q) (R), (S) आणि (T) ही पाच वाक्ये योग्यअनुक्रमाने पुनर्रचना करा; त्यांनतर खालील प्रश्नांची उत्तर द्या.

P. कावळ्याने गाण्याला सुरुवात केली.
Q. कावळ्याने चीज टाकून दिले.
R. कोल्ह्याने कावळ्याच्या गायनाची स्तुती केली.
S. तोंडात चीजचा तुकडा घेऊन एक कावळा झाडावर बसल्याचे कोल्ह्याने पाहिले.
T. स्तुतीने कावळा खूश झाला.

पुनर्रचना केल्यानंतर खालीलपैकी कोणते वाक्य पहिले असेल?

DIRECTION: Rearrange the following five sentences (P), (Q), (R), (S) and (T) in the proper sequence to form a meaningful paragraph; then answer the questions given below them.
P. The crow began to sing.
Q. The crow dropped the cheese.
R. The fox praised the crow's singing.
S. A fox saw a crow sitting on a tree with a piece of cheese in his mouth.
T. The crow was pleased by the flattery.

Which of the following should be the FIRST sentence after rearrangement?

ہدایات: ان پانچ جملوں (P)، (Q)، (R)، (S) اور (T) کو با معنی پیرا بنانے کے لئے دوبارہ ترتیب دیجئے، پھر نیچے دے گئے سوالوں کے جواب دیجئے.

P. کوے نے گانا شرو کیا.
Q. کوے نے پنیر گرا دی.
R. لومڑی نے کوے کے گانے کی تعریف کی.
S. ایک لومڑی نے دیکھا کوا منہ میں پنیر لئے پیڑ پر بیٹھا تھا.
T. کو ا تعریف سن کے خوش ہوا.

دوبارہ ترییب دینے کے بعد کون سا جملہ پہلے ہونا چاہیے؟

A.S
A.S
A.S

B.P
B.P
B.P

C.R
C.R
C.R

D.Q
D.Q
D.Q

Answer: A.S
A.S
A.S

68 रघुराम राजन हे भारताचे माजी_____होते.

Raghuram Rajan was the former _____ of India.

رگھورام راجن ہندوستان کے سابق _____ تھے۔

A.प्रधानमंत्री
A.Prime Minister
A.وزیراعظم

B.राष्ट्रपती
B.President
B.صدر

C.सीएजी
C.CAG
C.سی اے جی

D.यांपैकी कोणतेही नाही
D.None of these
D.ان میں سے کوئی نہیں

Answer: D.यांपैकी कोणतेही नाही
D.None of these
D.ان میں سے کوئی نہیں

69 एकूण अंतर्गत प्रतिबिंबांसाठी, प्रकाशाच्या किरणाला यातून जाणे आवश्यक आहे—

For total internal reflection, ray of light has to pass through —

مکمل اندرونی عکاسی کے لئے، روشنی کی شعاع کو _____ سے گزرنا پڑتا ہے۔

A.काच ते पाणी
A.Glass to water
A.شیشے سے پانی میں

B.पाणी ते काच
B.Water to glass
B.پانی سے شیشہ میں

C.हवा ते पाणी
C.Air to water
C.ہوا سے پانی میں

D.हवा ते काच
D.Air to Glass
D.ہوا سے شیشہ میں

Answer: A.काच ते पाणी
A.Glass to water
A.شیشے سے پانی میں

70 सूचना : खालील दिलेल्या प्रश्नामध्ये काही विधाने आणि काही निष्कर्ष आहेत. सामन्यात: ज्ञात तथ्यांपेक्षा ते वेगळे असतील तर दिलेली विधाने तुम्हाला सत्य मानवी लागतील आणि त्यानंतर दिलेल्या विधानाचे अनुकरण दिलेल्यापैकी कोणता निष्कर्ष तार्किकदृष्ट्या करतो ते ठरवा.
विधान :
S = A < P > R ≤ T< U
निष्कर्ष :
I. U >A
II. S ≤ T

DIRECTIONS: In the question given below, there are few statements followed by few conclusions. You have to take the given statements to be true even if they seem to be at variance with commonly known facts and then decide which of the given conclusion logically follow(s) from the given statements.

Statement:
S = A < P > R ≤ T< U
Conclusions:
I. U >A
II. S ≤ T

ہدایات: مندرجہ ذیل سوال میں، کچھ بیانات کے بعد کچھ نتائج موجود ہیں. اگر آپ کو عام طور پر جانے جاتے حقائق کے ساتھ بھی متغیر ہونے لگے تو بھی آپ دئے گئے بیانات دماغ میں رکھیں اور پھر اس بات کا فیصلہ کریں کہ ذیل میں دیا گیا کونسا نتیجہ منطقانہ طور پر دیے گئے بیانات کی پیروی کرتا ہے.

بیانات
S = A < P > R ≤ T< U
نتائج:
U >A .I
S ≤ T .II

A.फक्त I निष्कर्ष खरा आहे
A.Only conclusion I is true
A.صرف نتیجہ I درست ہے

B.फक्त II निष्कर्ष खरा आहे
B.Only conclusion II is true
B.صرف نتیجہ II درست ہے

C.I किंवा II यापैकी एक निष्कर्ष खरा आहे
C.Either conclusion I or II is true
C.یا I یا II نتیجہ درست ہے

D.I व II हे दोन्हीही निष्कर्ष खरे नाहीत
D.Neither Conclusion I nor II is true
D.نہ ہی I نہ ہی II نتیجہ درست ہے

Answer: D.I व II हे दोन्हीही निष्कर्ष खरे नाहीत
D.Neither Conclusion I nor II is true
D.نہ ہی I نہ ہی II نتیجہ درست ہے

71 सांची सुप्त हे _____ला समर्पित स्मारक आहे –

The Sanchi Stupa is a monument dedicated to –

سانچی اسٹوپا _____ کی یادگار میں ایک مقبرہ ہے

A.हिंदू धर्म
A.Hinduism
A.ہندومت

B.बौध्द धर्म
B.Buddhism
B.بدھ مت

C.जैन धर्म
C.Jainism
C.جین مت

D.यांपैकी कोणतेही नाही
D.None of these
D.ان میں سے کوئی نہیں

Answer: B.बौध्द धर्म
B.Buddhism
B.بدھ مت

72 'कल्याण' या शब्दाचा समानार्थी शब्द कोणता ?

A.अशुभ

	B.अमंगल
	C.हित
	D.अहित
Answer:	C.हित

73	शिक्षण मानसशास्त्रात याचा समावेश आहे Education psychology includes تعلیمی نفسیات میں شامل ہوتی ہے
	A.भावनिक A.emotional A.جذباتی
	B.सामाजिक B.social B.سماجی
	C.संज्ञानात्मक C.cognitive C.ادراکی
	D.वरीलपैकी सर्व D.all of above D.درج بالاسبھی
Answer:	D.वरीलपैकी सर्व D.all of above D.درج بالاسبھی

74	जिथे आकाश जमिनीला टेकलेले दिसते ती जागा -------
	A.डोंगर
	B.पर्वत
	C.समुद्र
	D.क्षितिज
Answer:	D.क्षितिज

75 दिलेल्या आकृतीमधील जास्तीत जास्त चौकोनांची संख्या काय आहे:

The maximum number of squares in the given figure is:

اس فیگر میں اسکوائر (مربع) کی زیادہ سے زیادہ تعداد ہے:

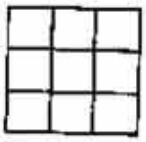

D. 9

A. 10

B. 13

C. 14

Answer: C. 14

76 हावडा स्टेशन _____येथे आहे

Howrah Station is in –

ہاوڑا اسٹیشن _____ میں ہے

A.कोलकाता
A.Kolkata
A.کولکاتا

B.गांधीनगर
B.Gandhinagar
B.گاندھی نگر

C.अंदमान
C.Andaman
C.انڈمان

D.भोपाळ
D.Bhopal
D.بھوپال

Answer: A.कोलकाता
A.Kolkata
A.کولکاتا

77 सूचना: अर्थपूर्ण परिच्छेद निर्माण करण्यासाठी, खाली दिलेली (P), (Q) (R), (S) आणि (T) ही पाच वाक्ये योग्यअनुक्रमाने पुनर्रचना करा; त्यांनतर खालील प्रश्नांची उत्तर द्या.

P. कावळ्याने गाण्याला सुरुवात केली.
Q. कावळ्याने चीज टाकून दिले.
R. कोल्ह्याने कावळ्याच्या गायनाची स्तुती केली.
S. तोंडात चीजचा तुकडा घेऊन एक कावळा झाडावर बसल्याचे कोल्ह्याने पाहिले.
T. स्तुतीने कावळा खूश झाला.

पुनर्रचना केल्यानंतर खालीलपैकी कोणते वाक्य दुसरे असेल?

DIRECTION: Rearrange the following five sentences (P), (Q), (R), (S) and (T) in the proper sequence to form a meaningful paragraph; then answer the questions given below them.
P. The crow began to sing.
Q. The crow dropped the cheese.
R. The fox praised the crow's singing.
S. A fox saw a crow sitting on a tree with a piece of cheese in his mouth.
T. The crow was pleased by the flattery.

Which of the following should be the SECOND sentence after rearrangement?

ہدایات: ان پانچ جملوں (P)، (Q)، (R)، (S) اور (T) کو با معنی پیرا بنانے کے لئے دوبارہ ترتیب دیجئے، پھر نیچے دے گئے سوالوں کے جواب دیجئے.

P. کوے نے گانا شرو کیا.
Q. کوے نے پنیر گرا دی.
R. لومڑی نے کوے کے گانے کی تعریف کی.
S. ایک لومڑی نے دیکھا کوا منہ میں پنیر لئے پیڈ پر بیٹھا تھا.
T. کو ا تعریف سن کے خوش ہوا.

دوبارہ ترییب دینے کے بعد کون سا جملہ دوسرا ہونا چاہیے؟

A.R
A.R
A.R

B.Q
B.Q
B.Q

C.S
C.S
C.S

D.T
D.T
D.T

Answer: A.R
A.R
A.R

78 समान तापमानाच्या ठिकाणाला जोडणाऱ्या लाईन्सला म्हणतात.

Lines joining places of equal temperature are called

مساوی درجہ حرارت کی جگہوں کو جوڑنے والی لائنوں کو _____ کہا جاتا ہے

A.समतापी
A.Isotherms
A.آئسوتھرم

B.समभागी
B.Isomers
B.آئسومرس

C.समवृष्टी
C.Isohyets
C.آئسوہائٹس

D.समभार
D.Isobars
D.آئسوبار

Answer: A.समतापी
A.Isotherms
A.آئسوتھرم

79 त्रिकोणाच्या बाजू 4 : 5 : 7 गुणोत्तरामध्ये आहेत. जर त्याची परिमिती 48 इंच असेल, तर दोन मोठ्या बाजूंमधील फरक काय असेल?

The sides of a triangle are in the ratio 4 : 5 : 7. If its perimeter is 48 inch, then what is the difference between its two bigger sides?

ایک مثلث کی طرفیں 4: 5: 7 کے تناسب میں ہیں۔ اگر اسکا احاطہ 48 انچ ہے، تو اسکی دو زیادہ بڑی طرفوں کے درمیان کیا فرق ہے؟

A.12 इंच
A.12 inch
A.12انچ

B.6 इंच
B.6 inch
B.6انچ

C.4 इंच
C.4 inch
C. 4انچ

D.2 इंच
D.2 inch
D.2انچ

Answer: B.6 इंच
B.6 inch
B.6انچ

80 विविध स्वभाववैशिष्ट्यांचा संयोग व परस्पर-क्रियेने यांपैकी एक वगळता प्रत्येक व्यक्तीचे अनोखे व्यक्तिमत्त्व घडते.

The combination and interaction of various traits forms a personality that is unique to each individual except one.

مختلف علامات کا مجموعہ اور تعامل ایک شخصیت کی تعمیر کرتی ہے جو ہرایک میں منفرد ہوتا ہے سوائے ایک۔

A.मुख्य
A.cardinal
A.عظیم

B.केंद्रीय
B.central
B.مرکزی

C.दुय्यम
C.secondary
C.ثانوی

D.तिय्यम
D.tertiary
D.تیسرے درجہ کا

Answer: D.तिय्यम
D.tertiary
D.تیسرے درجہ کا

81	यांपैकी कोणते मितीय अध्यापन साहित्य आहे Which among these is a dimensional teaching aid ان میں سے کون تعلیم دینے کی ابعادی مدد ہے
	A.काळी बोर्ड A.black board A.بلیک بورڈ
	B.प्रदर्शन फलक B.display board B.ڈسپلے بورڈ
	C.चित्रे (शीट) C.pictures (shit) C.تصاویر(شٹ)
	D.नमुना D.model D.ماڈل
Answer:	D.नमुना D.model D.ماڈل
82	Out of the given options, choose the one which is the correct passive voice of the sentence given below. Who did this work?
	A.Who have done this work?
	B.This work has been done by who?
	C.By whom was this work done?
	D.This work have been done by whom?
Answer:	C.By whom was this work done?
83	98 × 98 - 76 × 76 = ? 98 × 98 - 76 × 76 = ? 98 ×98 -76 × 76 =?

	A.3164 A.3164 A.3164
	B.3828 B.3828 B.3828
	C.3900 C.3900 C.3900
	D.4000 D.4000 D.4000
Answer:	B.3828 B.3828 B.3828

84	110 सेमी चे 1.10 मी शी गुणोत्तर शोधा Find the ratio of 110 cm to 1.10 m? 110 سینٹی میٹر کے مقابلہ 1.10 میٹر کا تناسب معلوم کریں؟
	A.1 : 10 A.1 : 10 A.1 : 10
	B.1 : 11 B.1 : 11 B.1 : 11
	C.1:1 C.1:1 C.1:1
	D.10:1 D.10:1 D.10:1
Answer:	C.1:1 C.1:1 C.1:1

85 अमर पश्चिमेकडे 25 कि.मी.चालत गेला, डावीकडे वळला आणि 15 कि.मी. चालत गेला. तो पुन्हा डावीकडे वळला आणि 35 कि.मी. चालला. नंतर तो उजवीकडे वळला आणि थांबला. आता त्याचे तोंड कोणत्या दिशेला आहे?

Amar walked 25km towards west, took a left turn and walked 15km. He again took a left turn and walked 35km. He then took a right turn and stopped. Now he was facing in which direction?

امر مغرب کی جانب 25 کلومیٹر چلا پھر بائیں جانب مڑا اور 15 کلومیٹر چلا- دوبارہ وہ پھر بائیں جانب مڑا اور 35 کلومیٹر چلا- وہ پھر بائیں جانب مڑا اور رک گیا- اب وہ کس سمت میں چل رہا تھا؟،

A.पश्चिम
A.West
A.مغرب

B.पूर्व
B.East
B.مشرق

C.दक्षिण
C.South
C.جنوب

D.उत्तर
D.North
D.شمال

Answer: C.दक्षिण
C.South
C.جنوب

86 1 वर्ष = ……..

1 year = ……..

1 سال = ……

A.367 दिवस
A.367 Days
A.367دن

B.365 दिवस
B.365 Days
B.365دن

C.364 दिवस
C.364 days
C.364دن

D.खालीलपैकी कोणतेही नाही
D.None of These
D.ان میں سے کوئی نہیں

Answer:

B.365 दिवस
B.365 Days
B.365دن

87

शिक्षक एक कुपोषित मूल कसे ओळखू शकतो?

How can a teacher detect a malnutritioned child?

ایک استاذ کیسے غذائیت کی کمی والے بچے کا اندازہ کر سکتا ہے؟

A.उर्जेची पातळी कमी असणे
A.low energy level
A.انرجی کی سطح میں کمی

B.शुष्क खवलेयुक्त त्वचा
B.dry scaly skin
B.خشک فلسی جلد

C.दोनपैकी कोणतेही नाही
C.none of the two
C.دونوں میں سے کوئی نہیں

D.(a) व (b)
D.(a) and (b)
D.(a) اور(b)

Answer:

D.(a) व (b)
D.(a) and (b)
D.(a) اور(b)

88

$(\sqrt{4})^{1/2}$ = ?

$(\sqrt{4})^{1/2}$ = ?

? = $(\sqrt{4})^{1/2}$

A.2
A.2
A.2

	B.5 B.5 B.5
	C.√2 C.√2 C.√2
	D.4 D.4 D.4
Answer:	C.√2 C.√2 C.√2

89	व्यक्तिमत्व रचनेवर कोणत्या दोन जैविक घटकांचा प्रभाव असतो? Which two biological factors have influence on personality structure? ون سے دو حیاتیاتی عوامل شخصیت کی ساخت کواثر انداز کرتے ہیں؟
	A.आनुवांशिक A.genetic A.جینیاتی
	B.वंशपरंपरा B.hereditary B.موروثی
	C.(a) व (b) C.(a) and (b) C.(a) اور(b) دونوں
	D.कोणतेही नाही D.none D. کوئی نہیں
Answer:	C.(a) व (b) C.(a) and (b) C.(a) اور(b) دونوں

For More Info And Videos About TAIT-Exam Syllabus And Other Exam Visit My Channel
TAIT च्या 30 प्रश्नपत्रिका PDF
BADSHAHimp Available Request 9765226781
WWW.YouTube.com/BADSHAHimp
Subscribe My Channel

90 जर तुम्ही शाळेमध्ये नियमितपणे कारने येता, जेव्हा शाळेचे मुख्याध्यापक तुम्हाला शाळेच्या काही पाहुण्यांना आणण्यास सांगतात, तर तुम्ही तुमचा निर्णय कसा घ्याल?

If you are coming to school regularly by car, when the school-principal has asked you to attend to some school-guest, how would you take your decision?

اگر آپ کار سے باقاعدگی کے ساتھ اسکول آتے ہیں، تو اسکول کے پرنسپل کے ذریعہ آپ سے کسی اسکول کے مہمان کی دیکھ بھال کرنے کے لیے کہنے پر، آپ اپنا فیصلہ کیسے کریں گے؟

A.तुम्ही सरळ नकार द्याल कारण इतरांची सेवा करण्यासाठी ती एक टॅक्सी नाही
A.You refuse straight-forward as it is not a taxi to entertain others
A.آپ براہ راست انکار کر دیتے ہیں کیونکہ یہ دوسروں کی تفریح کے لیے کوئی ٹیکسی نہیں ہے

B.तुम्ही स्वतःला अशा स्थितीत पाहाता की तुम्ही ते नाकारू सुद्धा शकत नाही किंवा तो प्रस्ताव स्वीकारायला सुद्धा तुम्हाला आवडत नाही
B.You neither find yourself in a position to refuse nor do you like to accept the offer.
B.آپ خود کو نہ تو انکار کرنے کی پوزیشن میں پاتے ہیں نہ ہی آپ پیشکش قبول کرنا چاہتے ہیں۔

C.तुम्ही त्यांना टॅक्सीची व्यवस्था करण्यचा सल्ला द्याल
C.You suggest him to arrange a taxi
C.آپ انھیں ایک ٹیکسی کا انتظام کرنے کا مشورہ دیتے ہیں

D.तुम्ही खिलाडु वृत्ती दर्शवाल आणि शाळेच्या पाहुण्यांना मदत कराल
D.You be a good sport and help the school-guest
D.آپ پیشکش قبول کر لیں گے اور اسکول کے مہمان کی مدد کریں گے

Answer: D.तुम्ही खिलाडु वृत्ती दर्शवाल आणि शाळेच्या पाहुण्यांना मदत कराल
D.You be a good sport and help the school-guest
D.آپ پیشکش قبول کر لیں گے اور اسکول کے مہمان کی مدد کریں گے

91 घटनेची संभाव्यता ही नेहमी

Probability of any event is always

کسی بھی واقعہ کی پروبیبلٹی ہمیشہ

A.गैर ऋण असते पण एक एवढी किंवा त्यापेक्षा कमी असते
A.non negative but less than or equal to one
A.غیر منفی، لیکن ایک سے کم یا ایک کے برابر

B.वास्तविक संख्या 1 पेक्षा लहान असते
B.a real number less than 1
B. ایک سے کم ایک حقیقی عدد

C.-1 आणि 1 दरम्यान असते
C.lies between -1 and 1
C.1 اور 1کے مابین

For More Info And Videos About TAIT-Exam Syllabus And Other Exam Visit My Channel
TAIT च्या 30 प्रश्नपत्रिका PDF
BADSHAHimp Available Request 9765226781
WWW.YouTube.com/BADSHAHimp
Subscribe My Channel

D.0 ते 1 दरम्यान असते
D.lies between 0 to 1
D.0 سے 1 کے مابین

Answer: D.0 ते 1 दरम्यान असते
D.lies between 0 to 1
D.0 سے 1 کے مابین

92 Out of the given four words only one is spelt correctly. Find the word that is correctly spelt.

A.Accommodation

B.Sepearate

C.Seigge

D.Succesfull

Answer: A.Accommodation

93 जर तुमच्या शाळेमध्ये शिस्तीची एक मोठी समस्या आहे ज्यामुळे शाळेचे वेळापत्रक बिघडून जाते. तुम्हाला अशी अत्यंत गोंधळ गडबडीच्या स्थिती हाताळण्यासाठी काय करायला आवडेल?

If there is a great problem of discipline in your school which disrupts the routine of the school. What would you like to do to deal with such an utter chaos?

اگر آپ کے اسکول میں نظم و ضبط کا بہت بڑا مسئلہ ہے جس سے اسکول کے معمول میں رکاوٹ آتی ہے۔ اس طرح کی بدنظمی سے نپٹنے کے لیے آپ کیا کرنا چاہیں گے؟

A.तुम्ही या समस्येची असलेली कारणे निपटून काढाल
A.You will thrash-out the reasons for this problem
A.آپ اس مسئلہ کی وجوہات کو ختم کر دیں گے

B.तुम्ही मुख्याध्यापकांच्या परवानगीने शिस्त समिती संघटीत कराल आणि त्यातील नियमांची काटेकोरपणे अंमलबजावणी कराल
B.You will organize the discipline committee with the permission of the principal and implement its rules strictly
B.آپ پرنسپل کی اجازت سے ایک ضابطہ کمیٹی بنائیں گے اور سختی کے ساتھ اس کے قوانین لاگو کریں گے

C.तुम्ही गुंडाच्या एका गटाशी संपर्क साधाल आणि त्यांच्या समर्थनासह गट बनवून दुसऱ्या समस्येवर नियंत्रण मिळवण्याचा प्रयत्न कराल.
C.You indulge in one group of gangsters and try to control another trouble making group with its support
C.آپ بدمعاشوں کے ایک گروپ کے ساتھ ملوث ہوں گے اور ان کی مدد سے دشواری پیدا کرنے والے گروپ کو کنٹرول کرنے کی کوشش کریں گے

D.तुम्ही विचार कराल की तुम्ही येथे फक्त शिकविण्यासाठी आला आहात, शांतता आणि कल्याणाचे रक्षण करण्यासाठी नाही
D.You think that you are here only to teach, not for guarding the peace and welfare.
D.آپ کے خیال میں آپ یہاں صرف پڑھانے کے لیے ہیں، امن اور فلاح و بہبود کی نگرانی کے لیے نہیں۔

Answer: B.तुम्ही मुख्याध्यापकांच्या परवानगीने शिस्त समिती संघटीत कराल आणि त्यातील नियमांची काटेकोरपणे अंमलबजावणी कराल
B.You will organize the discipline committee with the permission of the principal and implement its rules strictly
B.آپ پرنسپل کی اجازت سے ایک ضابطہ کمیٹی بنائیں گے اور سختی کے ساتھ اس کے قوانین لاگو کریں گے

94 पुढील म्हण पूर्ण करा - 'अति तिथे --------'

A.माती

B.गती

C.सती

D.मती

Answer: A.माती

95 वर्गामध्ये शिक्षकाच्या पदाचे सर्वात उत्तम वाक्य म्हणजे तो— आहे

The best statement of the position of the teacher in the class-room is that he is—

کلاس روم میں استاد کی حیثیت کا بہترین بیان یہ ہے کہ وہ ہے—

A.गटाचा अध्यक्ष
A.The chairman of the group
A.گروپ کا چیئرمین

B.गटाचा निर्देशक
B.The director of the group
B.گروپ کا ڈائرکٹر

C.गटाचा एक सदस्य
C.One member of the group
C.گروپ کا ایک ممبر

D.गटाचा निर्देशक
D.The director of the group
D.گروپ کا ڈائرکٹر

For More Info And Videos About TAIT-Exam Syllabus And Other Exam Visit My Channel
TAIT च्या 30 प्रश्नपत्रिका PDF
BADSHAHimp Available Request 9765226781
WWW.YouTube.com/BADSHAHimp
Subscribe My Channel

Answer: B.गटाचा निर्देशक
B.The director of the group
B.گروپ کا ڈائرکٹر

96 17-30 वयोगटातील व्यक्ती अशा तऱ्हेने ओळखल्या जाण्याची शक्यता असते.

Individual in the age group of 17-30 years is likely to be known as.

17-30 سال کے عمرگروپ کے افراد کو انفرادی طور پر کس طور پرجانا جائے گا۔

A.नुकतेच चालू लागलेले मूल
A.toddler
A.چلنا سیکھ رہاہو

B.किशोरवयीन
B.teenager
B. نوجوان

C.तरुण प्रौढ
C.young adult
C.نوجوان بالغ

D.नवजात
D.new born
D.نوزائدہ

Answer: C.तरुण प्रौढ
C.young adult
C.نوجوان بالغ

97 खालीलपैकी अशुद्ध वाक्य कोणते ?

A.तो हजार झाला.

B.तो हजर झाला.

C.तो हजर होता.

D.तो हजर आहे.

Answer: A.तो हजार झाला.

For More Info And Videos About TAIT-Exam Syllabus And Other Exam Visit My Channel
BADSHAHimp TAIT च्या 30 प्रश्नपत्रिका PDF Available Request 9765226781
YouTube WWW.YouTube.com/BADSHAHimp Subscribe My Channel

98 सूचना: दिलेल्या पर्यायांमधून वेगळे ते बाहेर काढा.

DIRECTIONS: Find the odd one out from the given alternatives.

سمت: دیے گئے متبادل میں سے بے جوڑ کو تلاش کرو۔

A.टोपी
A.CAP
A.ٹوپی

B.केसांचा टोप/ विग
B.WIG
B.وگ

C.टोपी
C.HAT
C.ہیٹ

D.जोडा
D.SHOE
D.جوتا

Answer: D.जोडा
D.SHOE
D.جوتا

99 सूचना: दिलेल्या पर्यायांमधून योग्य पर्याय निवडा.
एका घनावर दोन समांतर काप केल्यावर किती तुकडे मिळतात?

DIRECTION: Select the correct alternative from the given choices.
How many pieces are obtained by making two parallel cuts on a cube?

ہدایت: دیئے گئے اختیارات میں سے صحیح متبادل کا انتخاب کیجئے
ایک کیوب پر 2 مساوی کٹ لگانے سے کتنے ٹکڑے حاصل ہوتے ہیں؟

A.2
A.2
A.2

B.3
B.3
B.3

C.4
C.4
C.4

D.5
D.5
D.5

Answer: B.3
B.3
B.3

100 सूचना: खालील माहिती काळजीपूर्वक वाचा आणि खालील प्रश्नांची उत्तरे द्या:
I. A, B, C, D, E, F, G आणि H केंद्रासमोर बघत एका वर्तुळात बसलेले आठ मित्र आहेत.
II. F हा D च्या तत्काळ उजव्या बाजूला आहे तर, B हा E च्या तत्काळ डाव्या बाजूला आहे.
III. A हा C च्या किंवा H च्या समोर बसलेला नाही आणि A हा H चा शेजारी पण नाही.
IV. E आणि H, C च्या बाजूला बसलेले आहेत.
खालीलपैकी कोणते चूक आहे?
I. F हा G च्या तत्काळ डावीकडे आहे.
II. A हा D च्या तत्काळ उजवीकडे आहे.
III. H आणि D एकमेकांच्या समोरासमोर बसलेले आहेत.

DIRECTIONS: Study the following information carefully and answer the questions given below.
I. A, B, C, D, E, F, G and H are eight friends sitting in a circle facing the centre.
II. F is on the immediate right of D while B is on the immediate left of E.
III. A is sitting opposite to neither C nor H. And A is not the neighbour of H.
IV. E and H are sitting adjacent to C.
Which of the following is wrong?
I. F is to the immediate left of G
II. A is to the immediate right of D.
III. H and D are sitting opposite each other.

ہدایات: مندرجہ ذیل معلومات کو دھیان سے پڑھیں اور نیچے دیے گئے سوالوں کے جواب دیں۔
Iایک دائرے میں مرکز کی طرف رخ کیے ہوئے بیٹھے ہیں۔ H اور A، B، C، D، E، F، G - آٹھ دوست
II- F فوری طور پر D کے دائیں طرف ہے جبکہ E فوری طور پر B کے بائیں طرف ہے۔
III- A نہ تو C کے نہ ہی H کے مخالف بیٹھا ہے۔ A ، H کا پڑوسی نہیں ہے۔
IV- E اور H دونوں C کے بغل میں بیٹھے ہیں۔
مندرجہ ذیل میں سے کون غلط ہے؟
I- F فوری طور پر G کے بائیں طرف ہے۔
II- A فوری طور پر D کے دائیں طرف ہے۔
III- H اور D ایک دوسرے کے مخالف بیٹھے ہوئے ہیں۔

A.केवळ I
A.Only I
A.صرف I

B.केवळ II
B.Only II
B.صرف II

C.केवळ III
C.Only III
C.صرف III

D.सर्व I, II आणि III
D.All I, II and III
D.سبھی I، II اور III

Answer: D.सर्व I, II आणि III
D.All I, II and III
D.سبھی I، II اور III

101 सूचनाः दिलेल्या पर्यायांमधून एक ऍनालॉगस शब्द निवडा.

भारत हा दिल्लीशी निगडीत आहे जसा पाकिस्तानः

DIRECTIONS: Choose the analogous word from the given alternatives.

India is related to Delhi in the way as Pakistan is related to:

ہدایات: دیے گئے متبادل سے مطابق لفظ کا انتخاب کریں

بھارت کا رشتہ دلھی سے وہی رشتہ ہے جو پاکستان کا ------ سے ہے.

A.कराची
A.Karachi
A.کراچی

B.इस्लामाबाद
B.Islamabad
B. اسلام آباد

C.पेशावर
C.Peshawar
C. پشاور

D.लाहोर
D.Lahore
D. لاہور

Answer: B.इस्लामाबाद
B.Islamabad
B. اسلام آباد

For More Info And Videos About TAIT-Exam Syllabus And Other Exam Visit My Channel
TAIT च्या 30 प्रश्नपत्रिका PDF
BADSHAHimp Available Request 9765226781 YouTube WWW.YouTube.com/BADSHAHimp
Subscribe My Channel

102 2 पुरूष आणि 3 मुलं एक काम 10 दिवसांत करू शकतात तर 3 पुरूष आणि 2 मुलं तेच काम 8 दिवसांत करतात, 2 पुरूष आणि 1 मुलगा तेच काम किती दिवसांत करेल?

2 men and 3 boys can do a work in 10 days while 3 men and 2 boys can do a work in 8 days. In how many days, can 2 men and 1 boy do the same work?

2 آدمی اور 3لڑکے ایک کام کو 10 دن میں کر سکتے ہیں اور3 آدمی اور 2 لڑکے ایک کام کو 8 دن میں کر سکتے ہیں۔ یہی کام 2 آدمی اور 1 لڑکا کتنے دنوں میں سکتے ہیں؟

A.11
A.11
A.11

B.12.5
B.12.5
B.12.5

C.12
C.12
C.12

D.14
D.14
D.14

Answer: B.12.5
B.12.5
B.12.5

103 बिंदू X पासून सुरुवात करून, जयंत 15 मैलाचे पश्चिम दिशेने चालत गेला. तो डावीकडे वळला आणि 20 मीटर चालत गेला. त्यानंतर तो डावीकडे वळला आणि 15 मीटर चालत गेला. यानंतर तो उजवीकडे वळला आणि 12 मीटर चालत गेला. आता X बिंदू पासून जयंत किती लांब आहे?

Starting from the point X, Jayant walked 15 m towards west. He turned left and walked 20 m. He then turned left and walked 15 m. After this he turned to his right and walked 12 m. How far is now Jayant from X?

X 15 نقطہ سے شروع کرتے ہوئے، جینت مغرب کی طرف 15 میٹر تک چلا۔ وہ بائیں مڑا اور 20 میٹر تک چلا۔ وہ پھر بائیں مڑا اور X میٹر تک چلا۔ اس کے بعد وہ اپنی دائیں طرف مڑا اور 12 میٹر تک چلا۔ جینت اب سے کتنی دور ہے؟

A.32 मी.
A.32 m
A.32 میٹر

B.47 मी.
B.47 m
B.47 میٹر

C.42 मी.
C.42 m
C.42 میٹر

D.27 मी.
D.27 m
D.27 میٹر

Answer: A.32 मी.
A.32 m
A.32 میٹر

104 कमी प्रथिने असलेल्या आहाराने हे होऊ शकते

Low protein diet results in

کم پروٹین والی خوراک کا نتیجہ ہوتا ہے

A.उर्जेचा अभाव
A.lack of energy
A.انرجی کی کمی

B.अशक्तपणा
B.weakness
B.کمزوری

C.वाढ
C.growth
C.نُمو

D.वरीलपैकी सर्व
D.all of above
D.درج بالا سبھی

Answer: D.वरीलपैकी सर्व
D.all of above
D.درج بالا سبھی

For More Info And Videos About TAIT-Exam Syllabus And Other Exam Visit My Channel
TAIT च्या 30 प्रश्नपत्रिका PDF
BADSHAHimp Available Request 9765226781
WWW.YouTube.com/BADSHAHimp
Subscribe My Channel

105 निर्देश: खालील अक्षर-संख्याच्या व्यवस्थेचे निरीक्षण करा आणि खालील प्रश्नांची उत्तरे द्या:

B 8 4 C R M 9 P D K W F A 2 E J 7 X U Q H L T Y 6 G S

जर उपरोक्त व्यवस्थेचा पहिला भाग उलट क्रमाने लिहिलेला असेल आणि दुसरा भाग पण उलट क्रमाने लिहिलेला असेल तर कोणते अक्षर किवा संख्या डावीकडून अठरावी असेल?

DIRECTION: Study the following letter-number arrangement and answer the question given below:

B 8 4 C R M 9 P D K W F A 2 E J 7 X U Q H L T Y 6 G S

If the first half of the above arrangement is written in reverse order followed by the second half-written in reverse order, which letter/number will be eighteenth from left?

ہدایت جیل می دی گی حرف اور نمبرس کی ترتیب پڑھئے اور سوالونکے جوا ب دو

B 8 4 C R M 9 P D K W F A 2 E J 7 X U Q H L T Y 6 G S

اگر اپر کی لائیں آدھی الٹے طور پر لکھی جائے اسکے بعد آخری آدھا بھی الٹا لکھا جائے تو نے لائیں میں الٹے ہاتھ سے اتھرہوا حرف کونسا ہوگا ؟

A.Y
A.Y
A.Y

B.K
B.K
B.K

C.7
C.7
C.7

D.यांपैकी कोणतीही नाही
D.None of these
D.انمسے کوئی نہیں

Answer: A.Y
A.Y
A.Y

106 एका कुटुंबातील 5 सदस्यांची वजने अनुक्रमे 15 कि. ग्रॅ., 5 कि. ग्रॅ., 9 कि. ग्रॅ., 56 कि. ग्रॅ. व 60 कि. ग्रॅ. आहेत. या कुटुंबाचे सरासरी वजन काढा (कि. ग्रॅ.मध्ये).

The weights of 5 members of a family are 15 kg, 5 kg, 9 kg, 56 kg and 60 kg. Find the average weight of the family (in kg).

15 وزن کے 5 افراد کے خاندان ایکKG,5KG, 5KG, 9KG, 56KG, 60KG۔ ہے ۔ خاندان کے افراد کا اوسط وزن کیا ہوگا

A.50
A.50
A.50

B.29
B.29
B.29

C.14
C.14
C.14

D.54
D.54
D.54

Answer: B.29
B.29
B.29

107 सूचना: प्रत्येक प्रश्नाला एक प्रमुख विधानासोबत चार विधाने आहेत ज्यांच्याखाली a, b, c, आणि d असे चार विधान आहेत. क्रमवार विधानांची जोडी निवडा ज्यामध्ये प्रथम विधान दुसऱ्या विधानाला सुचवते, आणि दोन्ही विधाने तर्किकदृष्ट्या प्रमुख विधानासोबत निगडित असेल.

जर पाऊस पडला, तर मी एक छत्री आणीन
A. पाऊस येत आहे
B. मी एक छत्री विकत घेतली आहे
C. पाऊस पडत नाही
D. मी छत्री विकत घेतली नाही

DIRECTIONS: Each question has a main statement followed by four statements labelled A, B, C and D. Choose the ordered pair of statements, where the first statement implies the second, and the two statements are logically consistent with the main statement.

If it rains , I will bring an Umbrella
A. It is raining
B. I have bought an umbrella
C. It is not raining
D. I have not bought an umbrella

ہدایت: ہر سوال میں ایک جملہ ہے جسکے بعد چار جملےاے، بی،سی اور ڈی کے نام سے دئے گئے ہیں اسمیں منسلک جوڑیوں کو چنئے۔ جہاں پہلا جملہ دوسرے جملہ کی اور اشارہ کر رہا ہے اور دو جملے منطقی مرکزی بیان کے مطابق ہیں

اگر بارش ہوتی ہے تو میں چھتری لاؤں گا
A۔ بارش ہو رہی ہے
B۔ میں چھتری لے آیا ہوں
C۔ بارش نہیں ہو رہی
D۔ میں چھتری نہیں لایا ہوں

A.AB
A.AB
A.AB

B.BD
B.BD
B.BD

C.DA
C.DA
C.DA

D.CD
D.CD
D.CD

Answer: A.AB
A.AB
A.AB

108	कालाहारी वाळवंट हे _____या खंडामध्ये आहे Kalahari Desert is in the continent of – کالاہاری ریگستان _____ کے براعظم میں ہے
	A.आशिया A.Asia A.ایشیا
	B.युरोप B.Europe B.یورپ
	C.अफ्रीका C.Africa C.افریقہ
	D.ऑस्ट्रेलिया D.Australia D.آسٹریلیا
Answer:	C.अफ्रीका C.Africa C.افریقہ
109	‘अंग काढून घेणे’ या वाक्प्रचाराचा अर्थ काय ?
	A.आंघोळ करणे
	B.जबाबदारी टाळणे
	C.अंगावरचा मळ काढणे
	D.चोरी करणे
Answer:	B.जबाबदारी टाळणे

110 निर्देश: पुढील प्रश्नांपैकी प्रत्येक प्रश्नात एक संख्या गहाळ आहे. मालिकेचा नमुना समजून घ्या आणि योग्य संख्या निवडा.

4, 7, 11, 18, 29, 47, ..., 123, 199

DIRECTION: In each of the following questions one number is missing in the series. You have to understand the pattern of the series and insert the number.

4, 7, 11, 18, 29, 47, ..., 123, 199

ہدایت: جیل کے ہر سوال میں سرج کا ایک نمبر گمشدہ ہے . آپکو اس سرج کو سمجھنا ہے. اور گمشدہ نمبر کو یہا کھوجنا ہے

4, 7, 11, 18, 29, 47, ..., 123, 199

A.76
A.76
A.76

B.70
B.70
B.70

C.84
C.84
C.84

D.102
D.102
D.102

Answer: A.76
A.76
A.76

111 दूध विक्रेत्याकडे दोन प्रकारची दूधाची द्रावणे आहेत. पहिल्या कंटेनरमध्ये दूधाची टक्केवारी 80% आहे आणि दुसऱ्या कंटेनरमध्ये दूधाची टक्केवारी 60% आहे. जर त्याने पहिल्या कंटेनरमधील 28 दूध आणि दूसऱ्या कंटेनरमधील 32 लिटर दूध एकत्र केले, तर या मिश्रणामधील दूधाची टक्केवारी काय असेल__

A milkman has two types of milk solutions. In the first container the percentage of milk is 80% and in the second container the percentage of milk is 60%. If he mixes 28 liters of milk of the first container to the 32 liters of milk of the second container, then the percentage of milk in the mixture is__

دودھ والے کے پاس دو طرح کا دودھ ہے۔ایک ٹبے میں دودھ کا فیصدی تناسب 80% ہے اور دوسرے ٹبے میں دودھ کا فیصدی تناسب 60% ہے، اگر وہ پہلے ٹبے کا 28 لیٹر دودھ دوسرے ٹبے کے 32 لیٹر میں ملا دے تو ملائے ہوئے میں دودھ کا تناسب کتنے فیصد ہوگا

A.63.99
A.63.99
A.63.99

B.69.33
B.69.33
B.69.33

C.72.5
C.72.5
C.72.5

D.75.2
D.75.2
D.75.2

Answer: B.69.33
B.69.33
B.69.33

112 खालीलपैकी सर्वांत मोठा अपूर्णांक शोधा।

Find the largest of the following fractions:

مندرجہ ذیل کسور میں سے سب سے بڑی کسر تلاش کریں

A.17/23
A.17/23
A.17/23

B.27/33
B.27/33
B.27/33

C.37/43
C.37/43
C.37/43

D.47/53
D.47/53
D.47/53

Answer: D.47/53
D.47/53
D.47/53

113 5, 8, 11, 14, ……मालिकेतील कितव्या अनुक्रमाचे पद 323 आहे ?

Which term of the series 5, 8, 11, 14, …… is 323?

5, 8, 11, 14, …… 323 ؟ اس سرج کی یہ کونسا ٹرم ہے

A.108वे
A.108th
A.108واں

B.107वे
B.107th
B.107واں

C.106वे
C.106th
C.106واں

D.54वे
D.54th
D.54واں

Answer: B.107वे
B.107th
B.107واں

114 निम्नतापीका आहे –

CRYOGENICS is –

کرائیوجینکس (بردزا) ----- ہے۔

A.टाकीचा एक प्रकार
A.A type of tank
A.ایک قسم کا ٹینک

B.कमी तापमानात द्रव्ये आणि घटनेचा अभ्यास
B.Study of materials and phenomena at low temperature
B.کم درجہ حرارت پر میٹیریل اور مواد کا مطالعہ

C.रेडिओएक्टिव्ह घटकांचा अभ्यास
C.Study of Radioactive elements
C.ریڈیو اکٹیو عناصر کا مطالعہ

D.यापैकी एकही नाही
D.None of these
D.ان میں سے کوئی نہیں

Answer: B.कमी तापमानात द्रव्ये आणि घटनेचा अभ्यास
B.Study of materials and phenomena at low temperature
B.کم درجہ حرارت پر میٹیریل اور مواد کا مطالعہ

115 सूचना: खालील प्रश्नांमध्ये दिलेल्या पर्यायांमधून संबंधित अक्षर/शब्द/संख्या निवडा.

49 : 81 :: 64 : ?

DIRECTIONS: In the following question, select the related letter/word/number from the given alternatives.

49 : 81 :: 64 : ?

سمت: مندرجہ ذیل سوال میں، دیے گئے متبادل سے متعلقہ حرف/لفظ/نمبر منتخب کریں۔

49 : 81 :: 64 : ?

A.36
A.36
A.36

B.100
B.100
B.100

C.121
C.121
C.121

D.144
D.144
D.144

Answer: B.100
B.100
B.100

116 मशरूम स्वतःचे अन्न बनवू शकत नाही कारण –

Mushrooms can’t make their own food because -

مشروم خود ان کی اپنی خوراک نہیں بنا سکتے - کیونکہ

A.ते खूप लहान असतात
A.They are too small
A. وہ بہت چھوٹے ہوتے ہیں

B.त्यांच्यामध्ये क्लोरोफिलचा अभाव असतो
B.They lack chlorophyll
B. انمیں کلوروفل کی کمی ہوتی ہے

C.त्यांच्यामध्ये फोटो-ट्रोपिझमचा अभाव असतो
C.They lack photo-tropism
C.انمیں فوٹو ٹراپزم کی کمی ہوتی ہے

D.त्यांच्यामध्ये पाणी शोषण करण्यासाठी मुळांचा अभाव असतो
D.They lack roots to suck water
D.وہ جڑوں کی کمی کی وجہ سے پانی سوکھ نہیں پاتے

Answer:
B.त्यांच्यामध्ये क्लोरोफिलचा अभाव असतो
B.They lack chlorophyll
B. انمیں کلوروفل کی کمی ہوتی ہے

117 सूचना: खाली दिलेल्या विधान(A) आणि कारण (R) साठी, खालील पैकी योग्य पर्याय निवडा:

विधान (A): मीठ घालण्याने अन्न उकळण्यात मदत होते.
कारण (R): मीठ घालण्याने पाण्याचा उत्कलनांक वाढतो.

DIRECTION: For the Assertion (A) and Reason (R) given below, choose the correct alternative from the following:
Assertion (A): Adding salt helps in boiling food.
Reason (R): Adding salt increases the boiling point of water.

وجہ کے لئے، مندرجہ ذیل میں سے صحیح متبادل منتخب کریں (R) اور (A) (ہدایت: نیچے دئیے گئے اسرشن (پیمان حتمی:

اسرشن (A): نمک شامل کرنے سے کھانے کو ابلنے میں مدد ملتی ہے۔
وجہ (R): نمک شامل کرنے سے پانی کے نقطہ ابال میں اضافہ ہوتا ہے۔

A.दोन्ही (A) आणि (R) सत्य आहेत आणि (R) (A) च योग्य स्पष्टीकरण आहे
A.Both (A) and (R) are true and (R) is the correct explanation of (A)
A.(A) اور (R) دونوں صحیح ہیں اور (R) (A) کی درست وضاحت ہے

B.दोन्ही (A)आणि (R) खरे आहेत, परंतु (R) (A) च योग्य स्पष्टीकरण नाही
B.Both (A) and (R) are true, but (R) is not the correct explanation of (A)
B.(A) اور (R) دونوں صحیح ہیں، لیکن (R) (A) کی درست وضاحت نہیں ہے

C.A) सत्य आहे, परंतु (R) खोटे आहे
C.(A) is true, but (R) is false
C.(A) صحیح ہے، لیکن (R) غلط ہے

D.(A) खोटे आहे, परंतु (R) सत्य आहे
D.(A) is false, but (R) is true
D.(A) غلط ہے، لیکن (R) صحیح ہے

Answer: A.दोन्ही (A) आणि (R) सत्य आहेत आणि (R) (A) च योग्य स्पष्टीकरण आहे
A.Both (A) and (R) are true and (R) is the correct explanation of (A)
A.(A) اور (R) دونوں صحیح ہیں اور (R) (A) کی درست وضاحت ہے

118 कोणते विधान सत्य आहे?

Which statement is true?

کونسا بیان درست ہے؟

A.रेषाखंडाला दोन अत्यंबिंदू असतात.
A.A line segment has two end points
A. ایک لائین سیگمنٹ کے دو اختتامی نکات ہوتے ہیں۔

B.रेषाखंडाला अंत्यबिंदू नसतात
B.A line segment has no end points
B. ایک لائین سیگمنٹ کے اختتامی نکات نہیں ہوتے ہیں۔

C.रेषेला एक अत्यंबिंदू असतो
C.A line has one end point
C.۔ایک لائین سیگمنٹ کا ایک اختتامی نکتہ ہوتا ہے

D.रेषेला दोन अत्यंबिंदू असतात
D.A line has two end points
D.۔ایک لائین کے دو اختتامی نکات ہوتے ہیں

Answer: A.रेषाखंडाला दोन अत्यंबिंदू असतात.
A.A line segment has two end points
A. ایک لائین سیگمنٹ کے دو اختتامی نکات ہوتے ہیں۔

119 खालीलपैकी कोणते युरोपमधील शहर आहे?

Which of the following is a city in Europe?

درج ذیل میں سے کونسا ایک شہر یورپ میں ہے؟

A.ब्रासिलिया
A.Brasilia
A.برازیلیا

B.न्यू यॉर्क
B.New York
B.نیو یارک

C.बर्लिन
C.Berlin
C.برلن

D.बीजिंग
D.Beijing
D.بیجنگ

Answer: C.बर्लिन
C.Berlin
C.برلن

120 जर +म्हणजे '-', '-' म्हणजे '×', × म्हणजे '÷', आणि '÷ 'म्हणजे'+' ',तर ? = 3 + 2 − 3 ÷ 5 × 10

If + means '-', '−' means '×', × means '÷', and '÷' means '+', then 10 × 5 ÷ 3 − 2 + 3 = ?

10 × 5 ÷ 3 − 2 + 3 = ? تو ،'+' مطلب '÷' اور '÷' مطلب x ،'x' مطلب '-' ،'-' مطلب + اگر

A. 5

B. 2

C. 7

D. 18

Answer: A. 5

121 सूचना: दिलेल्या पर्यायांमधून वेगळे ते बाहेर काढा.

DIRECTIONS: Find the odd one out from the given alternatives.

سمت: دیے گئے متبادل میں سے بے جوڑ کو تلاش کرو۔

A.3
A.3
A.3

B.4
B.4
B.4

C.5
C.5
C.5

D.9
D.9
D.9

Answer: B.4
B.4
B.4

122 विधान:
बर्फ़ामध्ये खराब दृश्यमानतेमुळे हिमालयात रस्त्यांवरील अपघातांच्या संख्या वाढत आहेत.

कृतीचा कोर्स:
I. बर्फवृष्टीदरम्यान पांढऱ्या वाहनांचा वापर कमी करणे.
II. हिमालयात प्रवेश करताना लाल वगळता सर्व वाहनांवर बंदी घाला.

Statement:
Number of road accidents in Himalayas are increasing due to poor visibility in snow.

Course of actions:
I. Discourage use of white vehicles during snowfall.
II. Ban all vehicles except red from entering Himalayas.

بیان:
برافباری میں حدِ نظر کم ہونے کی وجہ سے ہمالیہ میں ٹریفک حادثات کی تعداد بڑھ رہی ہے۔

لائحہ عمل:
I۔برفباری کے دوران سفید گاڑیاں استعمال کرنے کی حوصلہ شکنی کی جائے۔
II۔ ہمالیہ میں لال رنگ کے علاوہ باقی تمام گاڑیوں کے داخلے پر پابندی لگا دیں۔

A.फक्त I अनुसरून आहे
A.Only I follows
A. صرف I لاگو ہو گا۔

B.फक्त II अनुसरण करते आहे
B.Only II follows
B. صرف II لاگو ہو گا۔

C.एकतर I किंवा II अनुसरून आहे
C.Either I or II follows
C. I یا II میں سے ایک لاگو ہو گا۔

D.I किंवा II दोन्हीपैकी काहीही अनुसरण करत नाही
D.Neither I nor II follows
D. I اور II میں سے کوئی بھی لاگو نہیں ہو گا۔

Answer: A.फक्त I अनुसरून आहे
A.Only I follows
A. صرف I لاگو ہو گا۔

123 सूचना: खालील माहिती काळजीपूर्वक वाचा आणि खालील प्रश्नांची उत्तरे द्या:
I. A, B, C, D, E, F, G आणि H केंद्रासमोर बघत एका वर्तुळात बसलेले आठ मित्र आहेत.
II. F हा D च्या तत्काळ उजव्या बाजूला आहे तर, B हा E च्या तत्काळ डाव्या बाजूला आहे.
III. A हा C च्या किंवा H च्या समोर बसलेला नाही आणि A हा H चा शेजारी पण नाही.
IV. E आणि H, C च्या बाजूला बसलेले आहेत.
खालील पैकी कोणता/कोणते योग्य आहेत?
I. D हा E च्या डावीकडे तिसरा आहे.
II. D हा E च्या उजवीकडे पाचवा आहे.
III. A आणि F एकमेकांच्या बाजूला आहेत.

DIRECTIONS: Study the following information carefully and answer the questions given below.
I. A, B, C, D, E, F, G and H are eight friends sitting in a circle facing the centre.
II. F is on the immediate right of D while B is on the immediate left of E.
III. A is sitting opposite to neither C nor H. And A is not the neighbour of H.
IV. E and H are sitting adjacent to C.
Which of the following is/are correct?
I. D is third to the left of E.
II. D is fifth to the right of E.
III. A and F are adjacent to each other.

ہدایات: مندرجہ ذیل معلومات کو دھیان سے پڑھیں اور نیچے دیے گئے سوالوں کے جواب دیں۔
Iایک دائرے میں مرکز کی طرف رخ کیے ہوئے بیٹھے ہیں۔ H اور A، B، C، D، E، F، G ۔ آٹھ دوست
II- F کے بائیں طرف ہے۔ E فوری طور پر B کے دائیں طرف ہے جبکہ D فوری طور پر
III- A کے نہ ہی C نہ تو H کے مخالف بیٹھا ہے۔ اور A ، H کا پڑوسی نہیں ہے۔
IV- E اور H دونوں C کے بغل میں بیٹھے ہیں۔
مندرجہ ذیل میں سے کون درست ہے/ہیں؟
I- D ، E کے بائیں سے تیسرا ہے۔
II- D ، E کے بائیں سے پانچواں ہے۔
III- A اور F ایک دوسرے سے ملے ہوئے ہیں۔

A.केवळ I
A.Only I
A.صرف I

B.केवळ II
B.Only II
B.صرف II

C.केवळ I आणि II
C.Only I and II
C.صرف I اور II

D.केवळ II आणि III
D.Only II and III
D.صرف II اور III

Answer: C.केवळ I आणि II
C.Only I and II
C.صرف I اور II

124 सूचना: या प्रत्येक प्रश्नांमध्ये दोन विधानांनंतर दोन निष्कर्ष येतात ज्यांना I आणि II असे अंकित केले आहे. जरी सामान्यपणे माहीत असलेल्या तथ्यांबरोबर जुळत नसले तरी खालील विधाने बरोबर आहेत असे समजून तुमचे योग्य उत्तर लिहा.
निवेदन:
सर्व खेळाडू धूम्रपान करतात.
काही धूम्रपान करणारे वाईन च्या व्यसनाधीन आहेत.
निष्कर्ष:
I. सर्व धूम्रपान करणारे खेळाडू आहेत.
II. काही वाईन व्यसनाधीन खेळाडू आहेत.

DIRECTION: In each of these questions, two statements are followed by two conclusions numbered I and II. Assume the given statements to be true, even if they seem to be of variance with commonly known facts and then mark your answer as.

Statements:
All players are smokers.
Some smokers are wine-addicts.

Conclusions:
I. All smokers are players.
II. Some wine-addicts are smokers.

دیے گئے ہیں۔ دیے گئے بیانات کو درست تسلیم کریں، II اور I ہدایت:ان میں سے ہر ایک سوال میں، دو بیانات کے بعد دو نتیجے نمبر
اگرچہ وہ عام طور پر معلوم حقائق کے برعکس نظر آتے ہوں اور پھر اس کے مطابق اپنا جواب نشان زد کریں۔

بیانات:
تمام کھلاڑی تمباکو نوش ہیں۔
کچھ تمباکو نوش شراب کے عادی ہیں۔

حل:
I. تمام تمباکو نوش کھلاڑی ہیں۔
II. کچھ شراب کے عادی تمباکو نوش ہیں۔

A.जर केवळ निष्कर्ष I निघत असल्यास.
A.If only conclusion I follows
A.صرف نتیجہ I پیروی کرتا ہے۔

B.जर केवळ निष्कर्ष II निघत असल्यास.
B.If only conclusion II follows
B.صرف نتیجہ II پیروی کرتا ہے۔

C.जर दोन्ही निष्कर्ष निघत असल्यास.
C.If both the conclusions follow
C.دونوں نتیجے پیروی کرتے ہیں۔

D.जर दोन्ही निष्कर्ष I आणि II निघत नसल्यास.
D.If neither I nor II follows
D.نہ تو I نہ ہی II پیروی کرتا ہے۔

Answer: B.जर केवळ निष्कर्ष II निघत असल्यास.
B.If only conclusion II follows
B.صرف نتیجہ II پیروی کرتا ہے۔

125 **दिलेल्या आकृतीमध्ये किती चौकोन आहेत?**

How many squares are there in the given figure?

دیئے گئے فیگر میں کتنے اسکوائر (مربع) ہیں؟

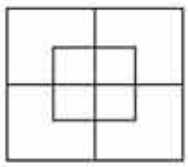

A. 7

B. 12

C. 10

D. 8

Answer: C. 10

126 DIRECTIONS: A sentence with an underlined phrasal verb is given below. Out of the four options, choose the one which can be substituted for the given phrasal Verb.
My boss asked me to account for the failure of my team in achieving the annual sales target.

A.fight for

B.answer for

C.dream for

D.attack for

Answer: B.answer for

127 Out of the four alternatives, choose the one which can be substituted for the given words/sentence.
The study of human societies and cultures and their development

A.Anthropology

B.Calligraphy

C.Choreography

D.Physiotherapy

Answer: A.Anthropology

128 संवादाचे मूलभूत घटक आहे

The basic elements of communication are—

مواصلات کے بنیادی عناصر ہیں—

A.स्रोत आणि प्राप्तकर्ता
A.The Source and the Receiver
A. ماخذ اور وصول کنندہ

B.मेसेंजर आणि रिसीव्हर
B.The Messenger and the Receiver
B. پیغام رساں اور وصول کنندہ

C.स्रोत आणि चॅनेल
C.The Source and the Channel
C. ماخذ اور چینل

D.वरील सर्व
D.All of the above
D. مندرجہ بالا سبھی

Answer:	A.स्रोत आणि प्राप्तकर्ता A.The Source and the Receiver A. ماخذ اور وصول کنندہ

129	‘नयन’ या शब्दाची संधी सोडवा.
	A.नय + न
	B.ने + अन
	C.नऊ + यन
	D.न + अयन
Answer:	B.ने + अन

130	_____ कीटकांच्या शरीरावर असते जे त्यांना श्वास घेण्यात मदत करते. _____ present on the body of insects help them to breathe. _____ کیڑوں کے جسم پر موجود ہیں جو انہیں سانس لینے میں مدد کرتے ہیں۔
	A.खवले A.Gills A. گلفڑا
	B.श्वासनळी B.Tracheae B.سانس کی نلی
	C.श्वासरंध्र C.Spiracles C. اسپائریکل) سانس لینے کا چھید)
	D.फुफ्फुसे D.Lungs D. پھیپھڑے
Answer:	C.श्वासरंध्र C.Spiracles C. اسپائریکل) سانس لینے کا چھید)

131 सूचना: दिलेल्या पर्यायांमधून वेगळे ते बाहेर काढा.

DIRECTIONS: Find the odd one out from the given alternatives.

سمت: دیے گئے متبادل میں سے بے جوڑ کو تلاش کرو۔

A.MOLN14
A.MOLN14
A.MOLN14

B.QSPR18
B.QSPR18
B.QSPR18

C.XZWY25
C.XZWY25
C.XZWY25

D.RPSQ17
D.RPSQ17
D.RPSQ17

Answer: D.RPSQ17
D.RPSQ17
D.RPSQ17

132 पीसाचा कलता मनोरा हा _____येथे आहे

The Leaning Tower of Pisa is in –

لیننگ ٹاور آف پیسا _____ میں ہے

A.ब्रिटेन
A.Britain
A.برطانیہ

B.फ्रान्स
B.France
B.فرانس

C.इटली
C.Italy
C.اٹلی

D.स्विझरलँड
D.Switzerland
D.سوئزر لینڈ

Answer: C.इटली
C.Italy
C.اٹلی

133 प्रश्न चिन्हाच्या जागी कोणते अक्षर किंवा संख्या येईल?

Which letter or number will replace question mark?

کونسا حرف یا عدد سوالیہ نشان کا بدل ہوگا؟

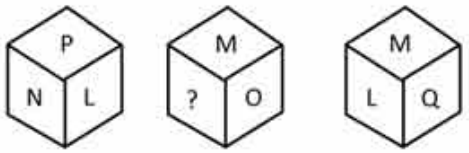

A. P

B. N

C. Q

D. L

Answer: C. Q

134 B हा D चा भाऊ आहे. D ही E ची बहीण आहे. E हा F चा भाऊ आहे. मग F चे B सोबत नाते काय आहे?

B is brother of D. D is sister of E. E is brother of F. How is F related to B?

D B کا بھائی ہے. E D کی بہن ہے. F E کا بھائی ہے. F کا B سے کیا رشتہ ہے؟

A.भाऊ
A.Brother
A.بھائی.

B.बहीण
B.Sister
B.بہن.

C.भाऊ किंवा बहीण
C.Brother or Sister
C.بھائی یا بہن.

D.यापैकी एकही नाही
D.None of these
D.ان میں سے کوئی نہیں.

Answer: C.भाऊ किंवा बहीण
C.Brother or Sister
C.بھائی یا بہن.

135 निर्देश: मालिका पूर्ण करा

A, ?, I, O, U

DIRECTION: Complete the series

A, ?, I, O, U

ہدایت اس سرج کو مکمّل کرو

A, ?, I, O, U

A.E
A.E
A.E

B.M
B.M
B.M

C.O
C.O
C.O

D.P
D.P
D.P

Answer: A.E
A.E
A.E

136 निर्देश: प्रश्न आकृतीमध्ये दिलेल्या वस्तूची पाण्यातील प्रतिमा शोधा.

DIRECTIONS: Find the water image of the object given in the question figure.

ہدایت: سوالیہ فیگر میں دی گئی شے کے پانی کی تصویر تلاش کریں۔

PQ8AF5BZ9

(A) 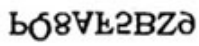

(B) 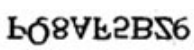

(C) 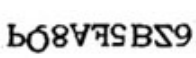

(D) 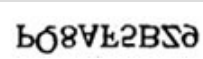

Answer: (D) 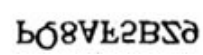

137 लोकशाहीवादी समाजाचा मूळ आदर्श म्हणजे—

A basic ideal of a democratic society is—

ایک جمہوری معاشرے کا بنیادی نمونہ ہے—

A.ताकदवान नेतृत्व
A.Powerful leadership
A.طاقتور قیادت

B.नेत्यांच्या मतांमध्ये विश्वास
B.Belief in the opinions of the leaders
B.رہنماؤں کی رائے میں یقین

C.ज्ञानी व्यक्तींसाठी आदरभाव
C.Respect for the enlightened individual
C.روشن خیال فرد کے لیے احترام

D.“बळाने सर्व काही योग्य होते”
D.“Might makes right”
D.طاقت سب کچھ ٹھیک کرتا ہے”

Answer: C.ज्ञानी व्यक्तींसाठी आदरभाव
C.Respect for the enlightened individual
C.روشن خیال فرد کے لیے احترام

138 **खालील दिलेल्या पर्यायातून गहाळ अंक शोधा.**

Find out missing number from the following given options.
نیچے کے اختیارات سے گمنام نمبر کھوجے.

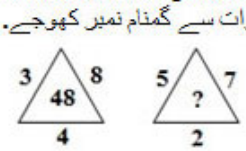

A. 27

B. 35

C. 54

D. 64

Answer: B. 35

139 सूचना: खालील माहिती काळजीपूर्वक वाचा आणि खालील प्रश्नांची उत्तरे द्या:
I. A, B, C, D, E, F, G आणि H केंद्रासमोर बघत एका वर्तुळात बसलेले आठ मित्र आहेत.
II. F हा D च्या तत्काळ उजव्या बाजूला आहे तर, B हा E च्या तत्काळ डाव्या बाजूला आहे.
III. A हा C च्या किंवा H च्या समोर बसलेला नाही आणि A हा H चा शेजारी पण नाही.
IV. E आणि H, C च्या बाजूला बसलेले आहेत.
खालीलपैकी कोणत्या दोन जोड्या संलग्न सदस्यांच्या आहेत?

DIRECTIONS: Study the following information carefully and answer the questions given below.
I. A, B, C, D, E, F, G and H are eight friends sitting in a circle facing the centre.
II. F is on the immediate right of D while B is on the immediate left of E.
III. A is sitting opposite to neither C nor H. And A is not the neighbour of H.
IV. E and H are sitting adjacent to C.
Which of the following are two pairs of adjacent members?

ہدایات: مندرجہ ذیل معلومات کو دھیان سے پڑھیں اور نیچے دیے گئے سوالوں کے جواب دیں۔
Iایک دائرے میں مرکز کی طرف رخ کیے ہوئے بیٹھے ہیں۔ H اور A، B، C، D، E، F، G ۔ آٹھ دوست
II- F کے بائیں طرف ہے۔ E فوری طور پر B کے دائیں طرف ہے جبکہ D فوری طور پر
III- A کا پڑوسی نہیں ہے۔ H ، Aکے مخالف بیٹھا ہے۔ اور H کے نہ ہی C نہ تو
IV- E اور H دونوں C کے بغل میں بیٹھے ہیں۔
مندرجہ ذیل میں سے کون قریبی ممبران کے دو جوڑے ہیں؟

A.AF आणि BC
A.AF and BC
A.AF اور BC

B.FH आणि BG
B.FH and BG
B.FH اور BG

C.AG आणि CE
C.AG and CE
C.AG اور CE

D.BG आणि AG
D.BG and AG
D.BG اور AG

Answer: C.AG आणि CE
C.AG and CE
C.AG اور CE

140	29 सेकंदामध्ये मिनिट काट्याद्वारे काय कोन बनवला जातो? What angle is made by minute hand in 29 sec.? 29 سکنڈ میں منٹ کی سوئی سے کونسا زاویہ بنتا ہے؟
	A.17° A.17° A.17°
	B.2.9° B.2.9° B.2.9°
	C.29° C.29° C.29°
	D.26° D.26° D.26°
Answer:	B.2.9° B.2.9° B.2.9°
141	_____ एक अशी बाब आहे ज्याला वस्तुमान आहे आणि जागा व्यापते. _____ is something that has mass and occupies space. ------- کا وزن ہوتا ہے اور جگہ گھیرتا ہے
	A.पदार्थ A.Matter A.میٹر
	B.घन B.Solid B.ٹھوس
	C.द्रव C.Liquid C. مائع

D.वायु
D.Gas
D. گیس

Answer: A.पदार्थ
A.Matter
A.میٹر

142 लागोपाठ येणाऱ्या तीन नैसर्गिक संख्यांच्या वर्गांची बेरीज 434 आहे. तिनही संख्यांपैकी सर्वांत लहान संख्या शोधा:

Sum of the squares of three consecutive natural numbers is 434. Find the smallest number of the three:

تین مسلسل قدرتی اعدادکےمربع کامجموعہ 434 ہے. تینوں میں سب سےچھوٹاعددتلاش کریں:

A.11
A.11
A.11

B.12
B.12
B.12

C.15
C.15
C.15

D.21
D.21
D.21

Answer: A.11
A.11
A.11

143 ध्वनी प्रदूषण (स्तर)चे एकक आहे —

The Unit of noise pollution (level) is—

شور کی آلودگی کی یونٹ (سطح) ہوتی ہے __

A.डेसिबल
A.Decibel
A.ڈیسیبل

B.दशमान
B.Decimal
B.ڈیسیمل

C.पी पीएम
C.Ppm
C.پی پی ایم

D.वरीलपैकी एकही नाही
D.None of the above
D.ان میں سے کوئی نہیں

Answer: A.डेसिबल
A.Decibel
A.ڈیسیبل

144 DIRECTIONS: A sentence with an underlined word is given below. Find the Word which is most similar in meaning to the underlined word.
The game was <u>abandoned</u> at half-time because of the poor weather conditions.

A.Discontinued

B.Continued

C.Initiated

D.Played

Answer: A.Discontinued

145 सूचना: खालील आकृतीत, त्रिकोण शिक्षक दर्शवतो, वर्तुळ विद्यार्थी दर्शवते आणि आयत कलाकार दर्शवतो. विद्यार्थी आणि कलाकार असलेले शिक्षक कोणती संख्या दर्शवते?

DIRECTIONS: In the following figure, the triangle represents Teachers, the circle represents Students and the rectangle represents Actors. Which number represents Teachers who are also Students and Actors?

ہدایت: مندرجہ ذیل تصویر میں، مثلث اساتذہ کی نمائندگی کرتا ہے، دائرہ کار طالب علموں کی نمائندگی کرتا ہے اور آئتاکار اداکاروں کی نمائندگی کرتا ہے۔ کونسا نمبر اساتذہ کی نمائندگی کرتا ہے جو طالب علم اور اداکار بھی ہیں؟

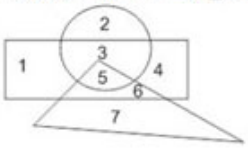

A. 3

B. 6

C. 5

D. 2

Answer: C. 5

146 जेव्हा डोळ्यात धुळ जाते डोळ्याचा कोणता भाग गुलाबी होतो आणि सुजतो?

What part of the eye gets inflamed and becomes pink when dust gets into it?

جب دھول آنکھ میں داخل ہوتے ہیں تو آنکھ کے کس حصے میں سوزش ہوجاتی ہے اور آنکھ سرخ ہو جاتی ہے؟

A.नेत्रश्लेष्म
A.Conjunctiva
A.کنجکٹیوا

B.पार पटल
B.Cornea
B.کورنیا

C.रंजित पटल
C.Choroid
C.کوریائڈ

D.श्वेत पटल
D.Sclerotic
D.اسکلیروٹک

Answer: A.नेत्रश्लेष्म
A.Conjunctiva
A.کنجکٹیوا

147 A sentence with an underlined idiomatic expression is given. What is the meaning of the idiomatic expression ‘Asleep at the switch’ in the sentence given below?
The security guard fell asleep at the switch and a robber broke in.

A.Failed to do one's duty at the proper time.

B.Discharged one’s duties with utmost sincerity

C.Wanted to sleep on a comfortable bed

D.None of the above

Answer: A.Failed to do one's duty at the proper time.

148 राम श्यामला म्हणाला "तू माझ्या वडिलांच्या पत्नीच्या मुलीचा मुलगा आहेस." मग श्यामचे रामसोबत नाते काय?

Ram said to Shyam, "You are the son of the daughter of the wife of my father". Then who is Shyam of Ram?

رام نے شام سے کہا،"تم میرے باپ کی بیوی کی بیٹی کے بیٹے ہو".تو شام رام کا کیا لگتا ہے؟

A.काका
A.Uncle
A. چچا

B.पुतण्या
B.Nephew
B.بھانجا

C.भावंडं
C.Sibling
C.بھائی یا بہن

D.मामा
D.Maternal uncle
D.ماما

Answer: B.पुतण्या
B.Nephew
B.بھانجا

149 सूचना: येथे दिलेल्या दोन निवेदनांमधून तार्किकदृष्ट्या सुसंगत पर्याय निवडा, परंतु केवळ एका निवेदानातून नाही.
सर्व स्वयंपाकी चालक असतात.
सर्व चालक नर्तक असतात.

DIRECTION: Select the alternative that logically follows from the two given statements, but not from one statement alone.
All cooks are drivers.
All drivers are dancers.

ہدایت: وہ متبادل منتخب کریں جو دیے گئے دو بیانات کے مطابق ہے، لیکن اکیلے ایک بیان سے نہیں۔

سبھی باورچی ڈرائیور ہیں۔
سبھی ڈرائیور ڈانسر ہیں۔

A.सर्व नर्तक आहेत.
A.All dancers are drivers
A.سبھی ڈانسر ڈرائیور ہیں۔

B.सर्व स्वयंपाकी नर्तक आहेत.
B.All cooks are dancers
B.سبھی باورچی ڈانسر ہیں۔

C.कोणताही स्वयंपाकी नर्तक नाही.
C.No cook is dancer
C.کوئی باورچی ڈانسر نہیں ہے۔

D.दोन्ही (A) आणि (B)
D.Both (A) and (B)
D.دونوں (A) اور (B)

Answer: B.सर्व स्वयंपाकी नर्तक आहेत.
B.All cooks are dancers
B.سبھی باورچی ڈانسر ہیں۔

150 शिक्षकाची प्राथमिक जबाबदारी — विषयी असते

The teacher’s primary responsibility lies in—

—استاد کی بنیادی ذمہ داری اس میں ہے

A.शैक्षणिक अनुभवांचे नियोजन करणे
A.Planning educational experiences
A.تعلیمی تجربات کی منصوبہ بندی

B.धोरणांची अंमलबजावणी आणि प्रशासन करणे
B.Implementing and administering policies
B.پالیسیوں کو لاگو کرنا اور انتظام کرنا

C.पालकांसह मानवी नातेसंबंधांना प्रोत्साहन देणे
C.Promoting human relations with parents
C.والدین کے ساتھ انسانی تعلقات کو فروغ دینا

D.शिक्षणाच्या तंत्रांविषयी प्रयोग करणे
D.Experimenting with teaching techniques
D.تدریس کی تکنیک کے ساتھ تجربہ

Answer: A.शैक्षणिक अनुभवांचे नियोजन करणे
A.Planning educational experiences
A.تعلیمی تجربات کی منصوبہ بندی

151 दिलेली अदलाबदल : चिन्हे - आणि +, तसेच आकडे 2 आणि 4; तर 4 + 2 - 8 चे मूल्य किती ?

Given interchanges: signs – and +, and numbers 2 and 4; then the value of 4 + 2 – 8 is

دیئے گئے تبادلے: علامات - اور +، اور نمبر 2 اور 4؛ تو 4 + 2 - 8 کی تعداد ہے

A.4
A.4
A.4

B.6
B.6
B.6

C.-2
C.-2
C.-2

D.2
D.2
D.2

Answer: B.6
B.6
B.6

152 सुडो लॉजिया फँटास्टिका किंवा मायथोमॅनिया ही संज्ञा याचे वर्णन करण्यासाठी असते.

Pseudo logia fantastica or mythomania term is to describe.

سیڈو لوگیا فنٹاسٹیکا یا میتھومینیا اصطلاح کا استعمال کس کے لئے کیا جاتا ہے۔

A.क्रिया-कल्पना अनिवार्यता
A.compulsive disorder
A.جبری خرابی

B.स्वमग्न मूल
B.autistic child
B.بچپن کا خیال باف

C.हिंसक मूल
C.violent child
C.پُرتشدد بچہ

D.वरीलपैकी कोणतेही नाही
D.none of the above
D.درج بالا میں سے کوئی نہیں

Answer: A.क्रिया-कल्पना अनिवार्यता
A.compulsive disorder
A.جبری خرابی

153 कोबोल, जावा, फॉर्टन या सर्व _____आहेत

Cobol, Java, Fortran are all –

کوبول، جاوا، فورٹران تمام _____ ہیں

A.दक्षिण अमेरीकेच्या जमाती
A.Tribes of South America
A.ساؤتھ ایفریقہ کے قبائل

B.कम्प्यूटर प्रोग्रामिंग लँग्वेजेज
B.Computer Programming languages
B.کمپیوٹر پروگرامنگ کی زبانیں

C.विविध भटक्या जमातींच्या भाषा
C.Languages of various nomadic tribes
C.متعدد خانہ بدوش قبائل کی زبانیں

D.यांपैकी कोणतेही नाही
D.None of these
D.ان میں سے کوئی نہیں

Answer: B.कम्प्यूटर प्रोग्रामिंग लँग्वेजेज
B.Computer Programming languages
B.کمپیوٹر پروگرامنگ کی زبانیں

154 सूचना: प्रत्येक प्रश्नाला एक प्रमुख विधानासोबत चार विधाने आहेत ज्यांच्याखाली a, b, c, आणि d असे चार विधान आहेत. क्रमवार विधानांची जोडी निवडा ज्यामध्ये प्रथम विधान दुसऱ्या विधानाला सुचवते, आणि दोन्ही विधाने तर्किकदृष्ट्या प्रमुख विधानासोबत निगडित असेल.

जर मला चांगले गुण मिळाले, तर मला प्रवेश मिळेल
A. मला चांगले गुण मिळाले
B. मला प्रवेश मिळाला
C. मला चांगले गुण मिळाले नाही
D. मला प्रवेश मिळाला नाही

DIRECTIONS: Each question has a main statement followed by four statements labelled A, B, C and D. Choose the ordered pair of statements, where the first statement implies the second, and the two statements are logically consistent with the main statement.

If I score well ,I will get admission.
A. I scored well
B. I got admission
C. I did not score well
D. I did not get admission

ہدایت: ہر سوال میں ایک جملہ ہے جسکے بعد چار جملےاے، بی،سی اور ڈی کے نام سے دئے گئے ہیں اسمیں منسلک جوڑیوں کو چنئے۔ جہاں پہلا جملہ دوسرے جملہ کی اور اشارہ کر رہا ہے اور دو جملے منطقی مرکزی بیان کے مطابق ہیں

اگر میں نے اچھے نمبر لیے تو مجھے داخلہ مل جائے گا
A۔ میں نے اچھے نمبر لیے
B۔ مجھے داخلہ مل گیا
C۔ میں نے اچھے نمبر نہیں لیے
D۔ مجھے داخلہ نہیں ملا

A.AB
A.AB
A.AB

B.BD
B.BD
B.BD

C.DA
C.DA
C.DA

D.CD
D.CD
D.CD

Answer: A.AB
A.AB
A.AB

155

सूचना: खालील प्रश्नात असे 3 घटक आहेत ज्यांचा परस्परांशी विशिष्ट संबंध आहे. समान संबंध वर्तुळाच्या संचांनी दर्शविलेला आहे, प्रत्येक वर्तुळ त्याचा आकार कितीही असला तरी, एका घटकाचे प्रतिनिधित्व करते. योग्य वर्तुळाच्या संचांशी खालील घटकांच्या जोड्या लावा.

DIRECTION: The question below has three items having certain relationship among them. The same relationship is expressed by sets of circles, each circle representing one item irrespective of its size. Match the items with right set of circles.

ہدایت:مندرجہ ذیل سوال میں تین آئٹم ہیں جن کے مابین مختلف تعلقات ہیں۔ دائروں کے ایک سیٹ کے ذریعہ یکساں تعلق ظاہر کیا جاتا ہے، ہر دائرہ سائز سے قطع نظر ایک آئٹم کی نمائندگی کرتا ہے۔ آئٹم کو دائروں کے درست سیٹ کے ساتھ ملائیں۔

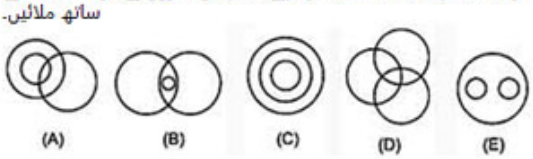

नद्या, कालवे, बारमाही पाण्याचे स्त्रोत

Rivers, Canals, Perennial source of water.

ندیاں، نہر، پانی کا مستقل ذریعہ

A. A

B. B

C. C

D. E

Answer: D. E

156 निर्देश: खालील प्रश्नामध्ये, उदाहरणामध्ये एक किंवा दोन पदे वगळून आकृत्यांचे मॅट्रीक्स, त्यानंतर चार/पाच उत्तर आकृत्या दिल्या आहेत. च्या जागी येणारी योग्य उत्तर आकृती शोधा?

DIRECTIONS: In the following question, a problem figure matrix is given with one or more terms missing, followed by four/five answer figures. Find the correct answer figure that will replace?

ہدایت: مندرجہ ذیل سوال میں، ایک مسائلی فیگر میٹرکس دیا گیا ہے جس میں ایک سے ایک سے زیادہ اصطلاح غائب ہے، اس کے بعد چار/پانچ جوابی فیگر ہیں۔وہ صحیح جوابی فیگر بتائیں جو اس کی جگہ لے گی؟

प्रश्न आकृती:

Question Figure:
سوالیہ فیگر:

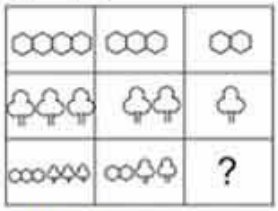

उत्तर आकृत्या:

Answer Figures:
جوابی فیگرز:



(A) (B) (C) (D)

A. A

B. B

C. C

D. D

Answer: B. B

157 निर्देश: खालील प्रश्नांमध्ये, कोणती उत्तर आकृती प्रश्न आकृतीतील नमुना पूर्ण करेल?

DIRECTIONS: In the following questions, which answer figure will complete the pattern in the question figure?

ہدایت: مندرجہ ذیل سوالات کے اندر کونسا جوابی فیگر سوالیہ فیگر میں پیٹرن کو مکمل کرے گا؟

प्रश्न आकृती:

Question Figure:

سوالیہ فیگر:



उत्तर आकृत्या:

Answer Figures:

جوابی فیگرز:

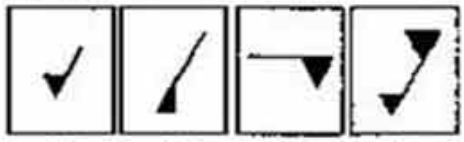

(a) 1

(b) 2

(c) 3

(d) 4

Answer: (a) 1

158 ‘हितवादी’ या शब्दाचा विरुद्धार्थी शब्द कोणता ?

A.दुष्ट

B.हितचिंतक

C.हितेच्छु

D.हितैषी

Answer: A.दुष्ट

159 DIRECTIONS: A sentence with an underlined word is given below. Find the word which is opposite in meaning to the underlined word from the given options.
Shiva was deeply wounded by the treachery of his close relatives and old friends.

A.Loyalty

B.Betrayal

C.Disloyalty

D.Duplicity

Answer: A.Loyalty

160 निर्देश: खालील शब्दांची तार्किक क्रमानुसार मांडणी करा.
1. तारुण्य
2. प्रौढता
3. बालपण
4. अर्भकावस्था
5. वार्धक्य
6. किशोरावस्था

DIRECTIONS: Arrange the following in a logical order.
1. Puberty
2. Adulthood
3. Childhood
4. Infancy
5. Senescence
6. Adolescence

ہدایات: ایک منطقی ترتیب میں مندرجہ ذیل کو مرتب کریں۔
1. بلوغت
2. بالغ
3. بچپن
4 شیر خوار
5. سینسر
6. کشور

A.2, 4, 6, 3, 1, 5
A.2, 4, 6, 3, 1, 5
A.2, 4, 6, 3, 1, 5

B.4, 3, 1, 6, 2, 5
B.4, 3, 1, 6, 2, 5
B.4, 3, 1, 6, 2, 5

C.4, 3, 6, 2, 1, 5
C.4, 3, 6, 2, 1, 5
C.4, 3, 6, 2, 1, 5

D.5, 6, 2, 3, 4, 1
D.5, 6, 2, 3, 4, 1
D.5, 6, 2, 3, 4, 1

Answer: B.4, 3, 1, 6, 2, 5
B.4, 3, 1, 6, 2, 5
B.4, 3, 1, 6, 2, 5

161 निर्देश: खालील प्रश्नामध्ये, आकृत्यांच्या मालिका दिल्या आहेत. आकृत्यांचे वर्गीकरण केले जाऊ शकते अशाप्रकारे पर्यायांमधून गटांचा एक संच निवडा.

DIRECTIONS: In the following question, a series of figures are given. Select from amongst the alternatives one set of groups into which the figures can be classified.

ہدایت: مندرجہ ذیل سوال میں، فیگر کی ایک سیریز دی گئی ہے۔متبادلات میں سے گروپ کا ایک ایسا سیٹ منتخب کریں جس میں فیگر کی درجہ بندی کی جا سکے۔

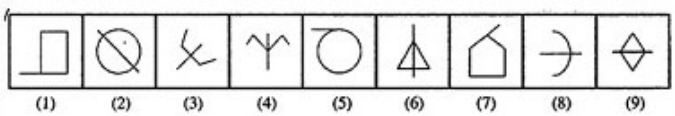

B. 3,8,4; 9,2,6; 7,1,5

C. 4,7,3; 9,6,2; 5,1,8

D. 4,9,2; 5,1,7; 3,8,6

A. 5,1,7; 3,2,4; 9,6,8

Answer: B. 3,8,4; 9,2,6; 7,1,5

162 जर दोन्ही पालक डावखुरे असल्यास मुले डावखुरे होण्याची शक्यता

If both parents are left handed chances of having left handed baby are

اگر دونوں والدین بائیں ہاتھ والے ہوتے ہیں تو لڑکا کا بائیں ہاتھ والا ہونے کی امید ہوتی ہے

A.0.68
A.0.68
A.0.68

B.0.5
B.0.5
B.0.5

C.शक्यता नाही
C.no chance
C.کوئی امید نہیں

D.1
D.1
D.1

Answer: B.0.5
B.0.5
B.0.5

163 सूचना: अर्थपूर्ण परिच्छेद निर्माण करण्यासाठी, खाली दिलेली (P), (Q) (R), (S) आणि (T) ही पाच वाक्ये योग्यअनुक्रमाने पुनर्रचना करा; त्यांनतर खालील प्रश्नांची उत्तर द्या.

P. कावळ्याने गाण्याला सुरुवात केली.
Q. कावळ्याने चीज टाकून दिले.
R. कोल्ह्याने कावळ्याच्या गायनाची स्तुती केली.
S. तोंडात चीजचा तुकडा घेऊन एक कावळा झाडावर बसल्याचे कोल्ह्याने पाहिले.
T. स्तुतीने कावळा खूश झाला.

पुनर्रचना केल्यानंतर खालीलपैकी कोणते वाक्य चौथे असेल?

DIRECTION: Rearrange the following five sentences (P), (Q), (R), (S) and (T) in the proper sequence to form a meaningful paragraph; then answer the questions given below them.
P. The crow began to sing.
Q. The crow dropped the cheese.
R. The fox praised the crow's singing.
S. A fox saw a crow sitting on a tree with a piece of cheese in his mouth.
T. The crow was pleased by the flattery.

Which of the following should be the FOURTH sentence after rearrangement?

ہدایات: ان پانچ جملوں (P)، (Q)، (R)، (S) اور (T) کو با معنی پیرا بنانے کے لئے دوبارہ ترتیب دیجئے، پھر نیچے دے گئے سوالوں کے جواب دیجئے.

P. کوے نے گانا شرو کیا.
Q. کوے نے پنیر گرا دی.
R. لومڑی نے کوے کے گانے کی تعریف کی.
S. ایک لومڑی نے دیکھا کوا منہ میں پنیر لئے پیڈ پر بیٹھا تھا.
T. کو ا تعریف سن کے خوش ہوا.

دوبارہ ترییب دینے کے بعد کون سا جملہ چوتھا ہونا چاہیے؟

A.P
A.P
A.P

B.R
B.R
B.R

C.S
C.S
C.S

D.Q
D.Q
D.Q

Answer: A.P
A.P
A.P

164 हा एक दैनंदिन नित्यक्रम आहे की काही विद्यार्थी शाळेच्या गेटकडून आरोग्याला हानिकारक अन्न पदार्थ आणतात. तुम्हाला तुमच्या विद्यार्थ्यांची ही स्थिती पाहून फार दुःख होते. यावर काय उपाय आहे?

It is the daily routine that some students bring unhealthy food items from the school-gate. You are full of sorrow to see this condition of your students. What is its remedy?

یہ روزانہ کا معمول ہے کہ کچھ طلبا اسکول کے گیٹ سے غیر صحت بخش کھانے کے آئٹم لے کر آتے ہیں۔ اپنے طلبا کی یہ حالت دیکھ کر آپ کو بہت تکلیف ہوتی ہے۔ اس کا علاج کیا ہے؟

A.तुम्ही शाळेच्या गेटकडील अन्नपदार्थ विक्रेत्यांना निघून जाण्याची जबरदस्ती कराल
A.You will force to leave the peddlers of eatables from the school gate
A.آپ خوردہ فروشوں کو اسکول کے گیٹ سے ہٹنے پر مجبور کریں گے

B.तुम्ही विद्यार्थ्यांना गेटच्या आतमध्येच राहाण्याची जबरदस्ती कराल
B.You will force the students to remain within the gate
B.آپ طلبا کو گیٹ کے اندر رہنے پر مجبور کریں گے

C.मुख्याध्यापकांना कळवाल
C.Inform the principal
C.پرنسپل کو مطلع کریں

D.सकाळी प्रार्थना मैदानामध्ये घोषणा कराल आणि त्यांना अशा प्रथा टाळण्यास सांगाल.
D.Announcing on the prayer ground in the morning and ask them to avoid such practices.
D.صبح میں اسمبلی گراؤنڈ پر اعلان کرتے ہوئے انھیں ایسے کام سے بچنے کے لیے کہیں۔

Answer: D.सकाळी प्रार्थना मैदानामध्ये घोषणा कराल आणि त्यांना अशा प्रथा टाळण्यास सांगाल.
D.Announcing on the prayer ground in the morning and ask them to avoid such practices.
D.صبح میں اسمبلی گراؤنڈ پر اعلان کرتے ہوئے انھیں ایسے کام سے بچنے کے لیے کہیں۔

165	एनपीकेचे फुलफॉर्म काय आहे? What is the full form of NPK? NPK کا مکمل نام ہے ا
	A.नायट्रोजन फॉस्फरस पोटॅशियम A.Nitrogen Phosphorous Potassium A. نائٹروجن فاسفورس پوٹاشیم
	B.नायट्रोजन पोटॅशियम फॉस्फरस B.Nitrogen Potassium Phosphorous B. نائٹروجن پوٹاشیم فاسفورس
	C.निऑन पोटॅशियम फॉस्फरस C.Neon Potassium Phosphorous C. نیان پوٹاشیم فاسفورس
	D.निऑन फॉस्फरस पोटॅशियम D.Neon Phosphorous Potassium D. نیان فاسفورس پوٹاشیم
Answer:	A.नायट्रोजन फॉस्फरस पोटॅशियम A.Nitrogen Phosphorous Potassium A. نائٹروجن فاسفورس پوٹاشیم
166	निर्देश: खालील प्रश्न दिलेल्या शब्दांवर आधारित आहेत. Upper/Minority/ Sentinel/ Sponsor “Minority” या शब्दात इंग्रजी वर्णमालेतील किती अक्षरे आहेत? DIRECTIONS: Following question is based on the given words. Upper/Minority/ Sentinel/ Sponsor In the word ‘Minority’ how many pairs of words have as many letters as in English alphabet? ہدایت جیل کے سوال دے ہے لفجونپر مشتمل ہیں Upper/Minority/ Sentinel/ Sponsor Minority لفج میں انگریجی حرف تہجیبی کے کتنی جودیا ہیں

A.एक
A.One
A.ایک

B.दोन
B.Two
B.دو

C.तीन
C.Three
C.تین

D.चार
D.Four
D.چار

Answer: B.दोन
B.Two
B.دو

167 खेळ व इतर गतीविधींमध्ये सक्रिय सहभाग घेतल्याने यात सुधारणा होते काय

Does active participation in sports and other activities improves

کیا کھیل میں فعال شرکت دیگر سرگرمیوں میں بہتری لاتا ہے

A.शारीरिक व सामाजिक विकास
A.physical & social development
A.جسمانی اور سماجی فروغ

B.केवळ शारीरिक
B.only physical
B.صرف جسمانی

C.केवळ सामाजिक
C.only social
C.صرف سماجی

D.वरीलपैकी कोणतेही नाही
D.none of the above
D.درج بالا میں سے کوئی نہیں

Answer: A.शारीरिक व सामाजिक विकास
A.physical & social development
A.جسمانی اور سماجی فروغ

168 निर्देश: खालीदिलेल्या अक्षराच्या क्रमात काही अक्षरे गहाळ केली आहेत ते त्या क्रमाने खाली दिलेल्या पर्यायांपैकी एक आहे.

a _ _ b _ _a_

DIRECTIONS: In each of the following letter series, same of the letters are missing which are given in that order as one of the alternatives below it.

a _ _ b _ _a_

ہدایت جیل کے حرف سرج میں کوئی حرف گمشدہ ہے آپکو انکی شناخت جیل کے اختیارات سے کرنی ہے

a _ _ b _ _a_

A.baabb
A.baabb
A.baabb

B.ababb
B.ababb
B.ababb

C.abbab
C.abbab
C.abbab

D.babab
D.babab
D.babab

Answer: A.baabb
A.baabb
A.baabb

169 जंक ई-मेलला हे देखील म्हणतात …….

Junk e-mail is also called ____.

جنک ای میل کو ------ بھی کہا جاتا ہے

A.स्पॅम
A.Spam
A.اسپام

B.स्पुफ
B.Spoof
B.اسپوف

	C.स्निफर स्क्रिप्ट C.Sniffer script C.اسنیفر اسکرپٹ
	D.स्पुल D.Spool D.اسپول
Answer:	A.स्पॅम A.Spam A.اسپام
170	(1001))^{2008} + 1002 चा अंतिम अंक आहे? The last digit of (1001)^{2008} + 1002 is? (1001)2008 + 1002 کا آخری ہندسہ ہے؟
	A.0 A.0 A.0
	B.2 B.2 B.2
	C.3 C.3 C.3
	D.4 D.4 D.4
Answer:	C.3 C.3 C.3

171 मनीष पेक्षा राजू उंच आहे पण अतिन पेक्षा लहान आहे. अतिन सर्वात उंच असणाऱ्या महेश पेक्षा लहान आहे. मग सर्वात लहान कोण ?

Raju is taller than Manish but shorter than Atin. Atin is shorter than Mahesh who is the tallest of all. Who is the smallest?

راجو منیش سے لمبھا ہے مگر آتیں سے چھوٹا. اتین منیش سے چھوٹا ہے جو سب سے لمبھا ہے.چھوٹا کون ہے؟

A. मनीष
A.Manish
A. منیش

B. अतिन
B.Atin
B. آتیں

C. राजू
C.Raju
C. راجو

D. महेश
D.Mahesh
D. مہیش

Answer: A. मनीष
A.Manish
A. منیش

172 पालकांचे प्रोत्साहन आणि पाठिंबा मुलाची स्व-संकल्पना उंचावू शकतात.

Parent encouragement and support could up child's self-concept.

والدین کی حوصلہ افزائی اور سہارا بچے کے ذاتی خیال کو بلند کر سکتا ہے۔

A.खरे
A.true
A.درست

B.खोटे
B.false
B.غلط

C.निश्चित माहित नाही
C.not sure
C.ضروری نہیں

D.कधी-कधी
D.sometimes
D.کبھی کبھی

Answer: A.खरे
A.true
A.درست

173 सूचना: खाली दिलेल्या प्रश्नात एक विधान आहे ज्याचे I आणि II असे दोन निष्कर्ष त्याखाली अंकित केलेले आहेत. या आधारे सर्वात योग्य पर्याय निवडा.

विधान:
भारताने क्रिकेटचा २०१४चा वर्ल्ड कप जिंकला.

निष्कर्ष:
I. भारतीय क्रिकेट खेळाडू जगातील सर्वोत्तम आहेत.
II. भारतीय संघ वर्ल्ड कपच्या अखेरच्या सामन्यात ३००पेक्षा अधिक धावा काढू शकला

DIRECTIONS: The question below has a statement followed by two conclusions numbered I and II. Based on this choose the option that is most suitable.

Statement:
India won Cricket World Cup 2014.

Conclusions:
I. Indian cricket players are best in the world.
II. Indian team was able to score more than 300 runs in the World Cup finals.

ہدایات: نیچے دیے گئے سوال میں ایک بیان کے بعد دو نتائج دیے گئے ہیں۔ اس کی بنیاد پرانتہائی موزوں آپشن کا انتخاب کیجیے۔ I اور II

بیان:
انڈیا نے کرکٹ ورلڈ کپ 2014 جیت لیا.

نتیجے:
I. انڈیین کرکٹ کے کھلاڑی دنیا میں بہترین ہیں.
II. ورلڈ کپ کے فائنل میں انڈیین ٹیم 300 سے زائد رنز اسکور کر سکی.

A.केवळ निष्कर्ष क्रमांक I विधानास अनुसरून आहे.
A.Only Conclusion I follows.
A. صرف نتیجہ I لاگو ہو گا۔

B.केवळ निष्कर्ष क्रमांक II विधानास अनुसरून आहे.
B.Only Conclusions II follows
B. صرف نتیجہ II لاگو ہو گا۔

C.निष्कर्ष क्रमांक I किंवा II अनुसरून आहे.
C.Either I or II follows
C. I یا II میں سے ایک لاگو ہو گا۔

D.कोणताही निष्कर्ष अनुसरून नाही.
D.Neither I nor II follow.
D. I اور II میں سے کوئی بھی لاگو نہیں ہو گا۔

Answer: D.कोणताही निष्कर्ष अनुसरून नाही.
D.Neither I nor II follow.
D. I اور II میں سے کوئی بھی لاگو نہیں ہو گا۔

174 सूचना: अर्थपूर्ण परिच्छेद निर्माण करण्यासाठी, खाली दिलेली (P), (Q) (R), (S) आणि (T) ही पाच वाक्ये योग्यअनुक्रमाने पुनर्रचना करा; त्यांनतर खालील प्रश्नांची उत्तर द्या.

P. कावळ्याने गाण्याला सुरुवात केली.
Q. कावळ्याने चीज टाकून दिले.
R. कोल्ह्याने कावळ्याच्या गायनाची स्तुती केली.
S. तोंडात चीजचा तुकडा घेऊन एक कावळा झाडावर बसल्याचे कोल्ह्याने पाहिले.
T. स्तुतीने कावळा खूश झाला.

पुनर्रचना केल्यानंतर खालीलपैकी कोणते वाक्य तिसरे असेल?

DIRECTION: Rearrange the following five sentences (P), (Q), (R), (S) and (T) in the proper sequence to form a meaningful paragraph; then answer the questions given below them.
P. The crow began to sing.
Q. The crow dropped the cheese.
R. The fox praised the crow's singing.
S. A fox saw a crow sitting on a tree with a piece of cheese in his mouth.
T. The crow was pleased by the flattery.

Which of the following should be the THIRD sentence after rearrangement?

ہدایات: ان پانچ جملوں (P)، (Q)، (R)، (S) اور (T) کو با معنی پیرا بنانے کے لئے دوبارہ ترتیب دیجئے، پھر نیچے دے گئے سوالوں کے جواب دیجئے.

P. کوے نے گانا شرو کیا.
Q. کوے نے پنیر گرا دی.
R. لومڑی نے کوے کے گانے کی تعریف کی.
S. ایک لومڑی نے دیکھا کوا منہ میں پنیر لئے پیڈ پر بیٹھا تھا.
T. کو ا تعریف سن کے خوش ہوا.

دوبارہ ترییب دینے کے بعد کون سا جملہ تیسرا ہونا چاہیے؟

A.T
A.T
A.T

B.P
B.P
B.P

C.S
C.S
C.S

D.Q
D.Q
D.Q

Answer: A.T
A.T
A.T

175 DIRECTIONS: A sentence with an underlined phrasal verb is given below. Out of the four options, choose the one which can be substituted for the given phrasal Verb.
The criminals got away after killing three men.

A.repented

B.regretted

C.escaped

D.imprisoned

Answer: C.escaped

176 **DIRECTIONS:** Complete the series by choosing right figure from the given choices.

निर्देश: दिलेल्या विकल्पांमधून योग्य आकृती निवडून मालिका पूर्ण करा.

ہدایت: فراہم کردہ اختیارات س ے صحیح قی گر منتخب کرک ے سیریز مکمل کری ں۔

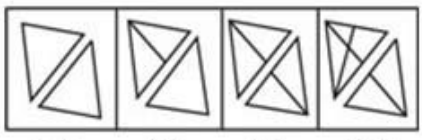

(A) (B) (C) (D)

(A) 

(B) 

(C) 

(D) 

Answer: (C) 

177 DIRECTIONS: Which one of the following figures represents the relationship among Shirts, Bed sheets and Towels? सूचना: यापैकी कोणती आकृती शर्ट्स, बेड शीट्स आणि टॉवेल्सच्या दरम्यान नाते दर्शवते? ہدایات : مندرجہ ذیل تصاویر میں سے کون سی تصویر قمیصوں،بیڈ شیٹس اور تولیے کے درمیان تعلقات کی نمائندگی کرتی ہے؟

(A) 

(B) 

(C) 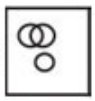

(D) 

Answer: (A) 

178

$2 – [6 – \{3 + (–4 + 5+ 1) \times 8\} + 12] =?$

$2 – [6 – \{3 + (–4 + 5+ 1) \times 8\} + 12] =?$

$2 – [6 – \{3 + (–4 + 5+ 1) \times 8\} + 12] =?$

A.1
A.1
A.1

B.2
B.2
B.2

C.3
C.3
C.3

D.4
D.4
D.4

Answer: C.3
C.3
C.3

179 संशोधन अभ्यास अहवाल देतात की अतिशय मोठ्या प्रमाणात विद्यार्थी त्यांची अशी कारकीर्द निवडत आहेत जी -

Research studies report that too large a proportion of students are choosing for their careers which are-

تحقیقی مطالعے رپورٹ کرتے ہیں کہ طلبا کا بہت بڑا تناسب اپنے لیے کیریر کا انتخاب کر رہا ہے جو ہیں-

A.व्यावसायिक आणि व्यवस्थापकीय नोकऱ्या
A.Professional and managerial jobs
A.پیشہ وارانہ اور انتظامی ملازمتیں

B.लिपिक आणि विक्रेता नोकऱ्या
B.Clerical and sale jobs
B.کلرک اور فروخت کی ملازمتیں

C.सार्वजनिक आणि घरगुती सेवा
C.Public and domestric services
C.عوامی اور گھریلو خدمات

D.कुशल आणि अर्ध-कुशल नोकऱ्या
D.Skilled and semi-skilled jobs
D.ہنرمند اور نیم ہنرمند ملازمتیں

Answer: A.व्यावसायिक आणि व्यवस्थापकीय नोकऱ्या
A.Professional and managerial jobs
A.پیشہ وارانہ اور انتظامی ملازمتیں

180 शिक्षकांची आचारसंहिता त्यांना — अनुमती देते

The Code of ethics of the teachers permits them to—

—اساتذہ کے اخلاقیات کا کوڈ انہیں اجازت دیتا ہے کہ

A.त्याच्या वर्गातील विद्यार्थ्याला पैसे घेऊन शिकविणे
A.Teach for pay a pupil in his class
A.اپنی کلاس میں طالب علم کو تنخواہ کے لیے پڑھائے

B.वर्गाबाहेरील राजकारणात सहभागी होणे
B.Participate in politics out of class
B.کلاس کے باہر سیاست میں حصہ لے

C.रिक्त जागेची घोषणा होण्यापूर्वी त्या नोकरीसाठी अर्ज करणे
C.Apply for a job before its vacancy is announced
C.خالی جگہ کے اعلان سے پہلے ملازمت کے لیے درخواست کرے

D.गोपनीय बाबींची चर्चा करणे जसे त्याला योग्य वाटेल
D.Discuss confidential matters as he sees fit
D.خفیہ معاملات پر گفتگو کرے جیسا کہ وہ مناسب سمجھتا ہے

Answer: B.वर्गाबाहेरील राजकारणात सहभागी होणे
B.Participate in politics out of class
B.کلاس کے باہر سیاست میں حصہ لے

181

निर्देश: खाली दिलेल्या आकृतीची आरशातील प्रतिमा शोधा.

DIRECTIONS: Find the mirror image of the figure given below.

ہدایات:مندرجہ ذیل فیگر میں آئنہ کی تصویر تلاش کریں۔

प्रश्न आकृती:

Question Figure:

سوالیہ فیگر:



उत्तर आकृत्या:

Answer Figures:

جوابی فیگرز:

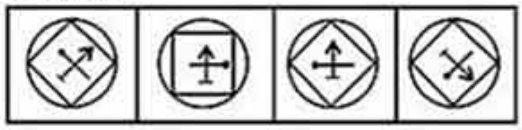

A. (A)

B. (B)

C. (C)

D. (D)

Answer: A. (A)

182 सूचना:दोन विधाने आणि त्यानंतर चार निष्कर्ष, I, II, III आणि IV दिले आहेत. ही विधाने सामान्यतः ज्ञात वस्तुस्थितीपेक्षा भिन्न असली तरी सत्य आहेत असे समजा. दिलेल्यापैकी कोणता निष्कर्ष दिलेल्या विधानांवरुन नक्की काढता येऊ शकतो हे तुम्ही ठरवायचे आहे.तुमचे उत्तर सूचित करा.
विधाने:
(a) एकही गाय खुर्ची नाही.
(b) सर्व खुर्च्या टेबल्स आहेत.
निष्कर्ष:
I. काही टेबल्स खुर्च्या आहेत.
II. काही टेबल्स गायी आहेत.
III. काही खुर्च्या गायी आहेत.
IV. एकही टेबल गाय नाही.

DIRECTION: Two statements are given following by four conclusions, I, II, III and IV. You have to consider that statements to be true, even if they seem to be at variance from commonly known facts. You are to decide which of the given conclusions can definitely be drawn from the given statements. Indicate your answer.

Statements:
(a) No cow is a chair.
(b) All chairs are tables.

Conclusion:
I. Some tables are chairs.
II. Some tables are cows.
III. Some chairs are cows.
IV. No table is a cow.

ہدایات: دو سٹیٹمنٹ جوکہ چار خلاصوں پر مشتمل ہیں .I،II، III اور IV. اپ کو وہ سٹیٹمنٹ درست ماننا ہے، اگرچہ دکہنے میں وہ بہت سارے حقاٰق ست مطبقت رکہتی ہو۔ اپ کو دیے گے خلاصوں میں سے یقینی طور پر اسے اختیار کرنا ہے جو سٹیٹمنٹ سے نکلا ہو. اپنا جواب تلاش کرے.

اظہار بیان:
کوی گایے کرسی نہیں ہے
تمام کرسیاں بینچ ہیں

نتائج:
Iکچہ بینچ کرسیاں ہیں۔
IIکچہ بینچ گایے ہیں
IIIکچہ کرسیاں گایے ہیں
IVکوی بینچ گایے نہیں ہے

A.एकतर II किंवा III निष्कर्ष निघेल
A.Either II or III follow
A. یا تو II یا III درست ہے

B.एकतर II किंवा IV निष्कर्ष निघेल
B.Either II or IV follow
B. یا تو II یا IV درست ہے

C.केवळ I निष्कर्ष निघेल
C.Only I follows
C.صرف I درست ہے

D.यापैकी एकही नाही
D.None of these
D.کوی بہی درست نہیں ہے

Answer: D.यापैकी एकही नाही
D.None of these
D.کوی بہی درست نہیں ہے

183 सूचना: दिलेल्या पर्यायांमधून वेगळे ते बाहेर काढा.

DIRECTIONS: Find the odd one out from the given alternatives.

سمت: دیے گئے متبادل میں سے بے جوڑ کو تلاش کرو۔

A.SUNDAY : YADSUN
A.SUNDAY : YADSUN
A.SUNDAY : YADSUN

B.MOTHER : TMPRHD
B.MOTHER : TMPRHD
B.MOTHER : TMPRHD

C.PARENT : TNEPAR
C.PARENT : TNEPAR
C.PARENT : TNEPAR

D.MOSTLY : YLTMOS
D.MOSTLY : YLTMOS
D.MOSTLY : YLTMOS

Answer: B.MOTHER : TMPRHD
B.MOTHER : TMPRHD
B.MOTHER : TMPRHD

184 सूचना: खालील प्रश्नांमध्ये दिलेल्या पर्यायांमधून संबंधित अक्षर/शब्द/संख्या निवडा.

NUMBER : UNBMRE ::SECOND: ?

DIRECTIONS: In the following question, select the related letter/word/number from the given alternatives.

NUMBER : UNBMRE ::SECOND: ?

سمت: مندرجہ ذیل سوال میں، دیے گئے متبادل سے متعلقہ حرف/لفظ/نمبر منتخب کریں۔

NUMBER : UNBMRE ::SECOND: ?

A.HOESTN
A.HOESTN
A.HOESTN

B.HOGNSD
B.HOGNSD
B.HOGNSD

C.ESOCDN
C.ESOCDN
C.ESOCDN

D.DNOCES
D.DNOCES
D.DNOCES

Answer: C.ESOCDN
C.ESOCDN
C.ESOCDN

185 खालीलपैकी पुल्लिंगी शब्द ओळखा.

A.मुलगा

B.मुलगी

C.मुली

D.मूल

Answer: A.मुलगा

186 कचरा चार प्रकारचे असू शकते: जैविक, विषारी,घाणेरडा व पुनःवापरण्यायोग्य.जैविक कचऱ्यामध्ये, हा एक महत्त्वाचा भाग आहे.

Garbage can be put under four categories: organic, toxic, soiled, and recyclable. Of the organic waste, this forms an important part -

کوڑا کرکٹ کو چار زمروں کے تحت بانٹا جا سکتا ہے. آرگینک، زہریلا، گندا اور ری سائیکل کے قابل ، حیاتیاتی فضلہ کا اہم ترین حصہ ، ہے

A.प्लॅस्टिक पिशव्या
A.Plastic bags
A.پلاسٹک کے بیگ

B.भाजांची साले
B.Vegetable peels
B.سبزیاں

C.कांच
C.Glass
C.گلاس

D.धातु
D.Metal
D.دھاتی

Answer: B.भाजांची साले
B.Vegetable peels
B.سبزیاں

187 सरकारच्या ..... प्रणालीमध्ये, सरकार संसदेने पारीत केलेल्या अविश्वसाच्या ठरावाद्वारे निष्काषित केले जाते.

The Government can be removed through a no-confidence motion passed by the Parliament, in the ..... system of government

حکومت کے ..... نظام میں عدم اعتماد کی تحریک کےپارلیمینٹ میں منظور ہونے پر حکومت کو ختم کیا جا سکتا

A.संघीय
A.Federal
A. وفاقی

B.एककी
B.Unitary
B. وحدانی

C.अध्यक्षीय
C.Presidential
C. صدارتی

D.संसदीय
D.Parliamentary
D. پارلیمانی

Answer: D.संसदीय
D.Parliamentary
D. پارلیمانی

188 किती वेद लिहिले गेले आहेत?

How many Vedas have been written?

کتنے وید لکھے گئے ہیں؟

A.2
A.2
A.2

B.3
B.3
B.3

C.4
C.4
C.4

D.5
D.5
D.5

Answer: C.4
C.4
C.4

189 तोंडामध्ये साचलेली लाळ याला पचवते

The saliva secreted in the mouth digests

منہ میں نکلنے والی رال .....کو ہضم کرتی ہے

A.प्रोटीन
A.Proteins
A.پروٹین

B.स्टार्च
B.Starch
B.اسٹارچ

C.चरबी
C.Fat
C.فیٹ

D.जीवनसत्व
D.Vitamins
D.وٹامن

Answer: B.स्टार्च
B.Starch
B.اسٹارچ

190 Out of the given optionswhich best expresses the meaning of the given Proverb?
Empty vessels make (the) most noise/sound.

A.People who have a lot of wealth do not boast at all

B.People who talk a lot and frequently express their opinions are often stupid

C.The vessels made of light metals should always be preferred

D.When the vessels are kept side by side they make a lot of noise

Answer: B.People who talk a lot and frequently express their opinions are often stupid

191 A आणि B बहिणी आहेत. R आणि S भाऊ आहेत. A ची मुलगी R ची बहीण आहे. मग B चे S सोबत नाते काय आहे?

A and B are sisters. R and S are brothers. A’s daughter is R’s sister. What is B’s relation to S?

A اور B بہنے ہے. R اور S بھائی ہے. A کی بیٹی R کی بہن ہے. B کا S کے ساتھ کیا رشتہ ہے ؟

A.आई
A.Mother
A.ماں

B.आजी
B.Grandmother
B.نانی یا دادی

For More Info And Videos About TAIT-Exam Syllabus And Other Exam Visit My Channel
TAIT च्या 30 प्रश्नपत्रिका PDF
BADSHAHimp Available Request 9765226781
WWW.YouTube.com/BADSHAHimp
Subscribe My Channel

C.बहीण
C.Sister
C.بہن

D.काकू
D.Aunt
D.خالا

Answer: D.काकू
D.Aunt
D.خالا

192 विधान:
भारतातील वायू प्रदूषण भयानक पातळी गाठत आहे.

कृतीचा कोर्स:
I. कीटकनाशकांचा वापर प्रतिबंधित करा.
II. भारतात प्रदूषण करणा-या व्यक्तींना शोधण्यासाठी उच्चस्तरीय समितीची स्थापना करा.

Statement:
Air pollution in India is reaching alarming levels.

Course of actions:
I. Ban use of insecticides.
II. Institute a high level committee to find persons involved in polluting India.

بیان:
انڈیا میں فضائی آلودگی خطرناک حد تک پہنچ رہی ہے۔

لائحہ عمل:
I۔ کیڑے مار ادویات کے استعمال پر پابندی لگائیں۔
II۔ انڈیامیں آلودگی پھیلانے میں ملوث افراد کو تلاش کرنے کے لیے ایک اعلیٰ سطح کی کمیٹی بنائی جائے۔

A.फक्त I अनुसरून आहे.
A.Only I follow
A. صرف I لاگو ہو گا۔

B.फक्त II अनुसरण करते आहे
B.Only II follows
B. صرف II لاگو ہو گا۔

C.एकतर I किंवा II अनुसरून आहे
C.Either I or II follows
C. I یا II میں سے ایک لاگو ہو گا۔

For More Info And Videos About TAIT-Exam Syllabus And Other Exam Visit My Channel
TAIT च्या 30 प्रश्नपत्रिका PDF
BADSHAHimp Available Request 9765226781
WWW.YouTube.com/BADSHAHimp
Subscribe My Channel

D. I किंवा II दोन्हीपैकी काहीही अनुसरण करत नाही.
D.Neither I nor II follows
D. I اور II میں سے کوئی بھی لاگو نہیں ہو گا۔

Answer: D. I किंवा II दोन्हीपैकी काहीही अनुसरण करत नाही.
D.Neither I nor II follows
D. I اور II میں سے کوئی بھی لاگو نہیں ہو گا۔

193 **निर्देश: प्रश्नामधील आकृती जोडली असलेली उत्तर आकृती शोधा.**

DIRECTIONS: Find the answer figure in which question figure is embedded.

ہدایت: وہ جوابی فیگر بتائیں جس میں سوالیہ فیگر چھپا ہو۔

प्रश्न आकृती:
Question Figure:
سوالیہ فیگر:



उत्तर आकृत्या:
Answer Figures:
جوابی فیگرز:

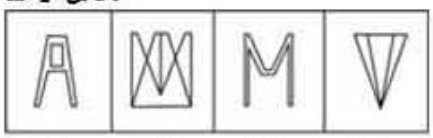

(A) (B) (C) (D)

A. (A)

B. (B)

C. (C)

D. (D)

Answer: B. (B)

For More Info And Videos About TAIT-Exam Syllabus And Other Exam Visit My Channel
TAIT च्या 30 प्रश्नपत्रिका PDF
BADSHAHimp Available Request 9765226781
WWW.YouTube.com/BADSHAHimp
Subscribe My Channel

194

निर्देश: घडी न घातलेला फासा दिला आहे. दिलेल्या विकल्पांमधून घडी न घातलेल्या फाशाचा घडी घातलेला नमुना निवडा.

DIRECTIONS: An unfolded dice is given. Choose the folded pattern of unfolded dice from the given alternatives.

ہدایت:ایک مڑا ہوا ڈائس دیا گیا ہے۔فراہم کردہ متبادلات سے غیر مڑے ہوئے ڈائس کے غیر مڑے ہوئے پیٹرن کو چنیں۔



(A) 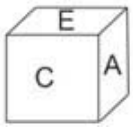

(B) 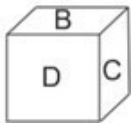

(C) 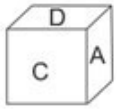

(D) 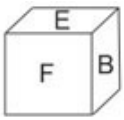

Answer: (B) 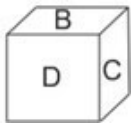

195 खुर्चीची विक्री किंमत रु. 800 आहे. दुकानदाराने ती 10% आणि 15% च्या दोन सलग सवलतींवर खरेदी केली. त्याने वाहतूकीवर रु. 25 खर्च केले आणि खुर्ची रु. 800 ला विकली. त्याच्या नफा/तोट्याची टक्केवारी काढा.

The marked price of a chair is Rs.800. A shopkeeper purchased it on two successive discounts of 10% and 15%. He spent Rs.25 on transportation and sold the chair for Rs.800. Find out his gain/loss percentage.

ایک کرسی کی علامتی قیمت 800 روپے ہے. ایک دوکاندار نے اسے 10%اور 15%کی دو مسلسل رعایت پر خریدا. اس نے نقل و حمل پر 25 روپے خرچ کر کے کرسی کو800 روپے میں بیچ دیا. اس کا فائدہ / نقصان کا فی صد معلوم کریں.

For More Info And Videos About TAIT-Exam Syllabus And Other Exam Visit My Channel
TAIT च्या 30 प्रश्नपत्रिका PDF
BADSHAHimp Available Request 9765226781
WWW.YouTube.com/BADSHAHimp
Subscribe My Channel

A.नफा 25.58%
A.Gain 25.58%
A. 25.58 نفع%

B.तोटा 25.75%
B.Loss 25.75%
B. 25.75 نقصان%

C.नफा 11.11%
C.Gain 11.11%
C. 11.11 نفع%

D.तोटा 11.11%
D.Loss 11.11%
D. 11.11 نقصان%

Answer: A.नफा 25.58%
A.Gain 25.58%
A. 25.58 نفع%

196 सूचना: खालील प्रश्नांमध्ये दिलेल्या पर्यायांमधून संबंधित अक्षर/शब्द/संख्या निवडा.

M × N : 13 × 14 : : F × R : ?

DIRECTIONS: In the following question, select the related letter/word/number from the given alternatives.

M × N : 13 × 14 : : F × R : ?

سمت: مندرجہ ذیل سوال میں، دیے گئے متبادل سے متعلقہ حرف/لفظ/نمبر منتخب کریں۔

M × N : 13 × 14 : : F × R : ?

A.14 × 15
A.14 × 15
A.14 × 15

B.5 × 17
B.5 × 17
B.5 × 17

C.6 × 18
C.6 × 18
C.6 × 18

D.7 × 19
D.7 × 19
D.7 × 19

For More Info And Videos About TAIT-Exam Syllabus And Other Exam Visit My Channel
TAIT च्या 30 प्रश्नपत्रिका PDF
BADSHAHimp Available Request 9765226781
WWW.YouTube.com/BADSHAHimp
Subscribe My Channel

Answer: C.6 × 18
C.6 × 18
C.6 × 18

197 ताज महाल हा _____च्या सत्तेदरम्यान बांधला गेला

The Taj Mahal was built during the reign of –

تاج محل کو _____ کی حکومت میں بنایا گیا تھا

A.अकबर
A.Akbar
A.اکبر

B.शाहजहां
B.Shah Jahan
B.شاہ جہاں

C.कुतुबुद्दीन-ऐबक
C.Qutb-ud-din-Aibak
C.قطب الدین ایبک

D.अब्राहम लोधी
D.Ibrahim Lodhi
D.ابراہیم لودھی

Answer: B.शाहजहां
B.Shah Jahan
B.شاہ جہاں

198 378 × 456 = ?

378 × 456 = ?

378 × 456 = ?

A.172368
A.172368
A.172368

B.172524
B.172524
B.172524

For More Info And Videos About TAIT-Exam Syllabus And Other Exam Visit My Channel
BADSHAHimp TAIT च्या 30 प्रश्नपत्रिका PDF Available Request 9765226781 YouTube WWW.YouTube.com/BADSHAHimp Subscribe My Channel

C.152464
C.152464
C.152464

D.145278
D.145278
D.145278

Answer:

A.172368
A.172368
A.172368

199

निर्देश: कोणत्याही एका पर्यायामध्ये दिल्यानुसार एक शब्द हा फक्त एका संख्या संचाद्वारे दर्शवला जातो. पर्यायांमध्ये दिलेले हे संख्यांचे गट दिलेल्या दोन मॅट्रीक्समध्ये दर्शवल्याप्रमाणे वर्णाक्षरांच्या दोन वर्गाद्वारे दर्शवले गेले आहेत. मॅट्रीक्स-I च्या रकाने आणि ओळींना 0 ते 4 असे क्रमांक दिले आहेत आणि मॅट्रीक्स-II ला 5 ते 9 असे क्रमांक दिले गेले आहेत. या मॅट्रीक्सेसमधील अक्षरे ही प्रथम त्याच्या ओळी आणि पुढे रकान्यांनी दर्शवली आहेत. उदाहरणार्थ, 'N' हे 21, 67 इ. अशाप्रकारे दर्शवले आहे आणि R हे 57, 66 इ. अशाप्रकारे दर्शवले गेले आहे. अशाप्रकारे तुम्हाला 'METER' या शब्दासाठी संच ओळखायचा आहे.

DIRECTIONS: A word is represented by only one set of numbers as given in any one of the alternatives. The sets of numbers given in the alternatives are represented by two classes of alphabet as shown in the given two matrices. The columns and rows of Matrix-I are numbered from 0 to 4 and that of Matrix-II are numbered from 5 to 9. A letter from these matrices can be represented first by its row and next by its column, for example, 'N' can be represented by 21, 67 etc. and R can be represented by 57, 66 etc. Similarly, you have to identify the set for the word METER'.

ہدایت: ایک لفظ کی نمائندگی صرف ایک سیٹ نمبر کرتا ہے جیسا کہ متبادلات میں سے ایک میں دیا گیا ہے۔متبالات میں دیئے گئے ا-نمبرات کا سیٹ کا نمائندگی دو ٹیبرے کے الفابیٹ کے ذریعہ ہوتی ہے جیسا کہ فراہم کردہ دو میٹرکس میں دکھایا گیا ہے۔میٹرکس کے کالو اور قطار کے نمبر 5 سے 9 تک ہے۔ان میٹرکس کے ایک لفظ کی II-کے کالو اور قطار کا نمبر 0 سے 4 تک ہے او میٹرکس کی نمائندگی الف 67 وغیرہ کے ذریعہ ہو N نمائندگی پہلے اس کے قطار کے ذریعہ اور پھر اس کے کالم کے ذریعہ کی جا سکتی ہے، مثلاً کے سیٹ کی نشاندہی کرتی ہے۔ 'METER' کی نمائندگی 57 66 وغیرہ کے ذریعہ ہو سکتی ہے۔ اسی طرح آپ کو لفظ R سکتی ہے اور

मॅट्रीक्स-I
Matrix-I
I-میٹرکس

	0	1	2	3	4
0	J	R	A	N	B
1	W	U	N	R	L
2	E	N	R	G	J
3	N	J	P	O	M
4	E	T	O	F	A

मॅट्रीक्स-II
Matrix-II
II-یٹرکس

	5	6	7	8	9
5	H	M	R	I	T
6	M	R	N	T	P
7	C	S	T	E	U
8	S	N	S	M	S
9	M	B	E	Q	U

A. 65, 40, 68, 99, 66

B. 88, 20, 59, 97,13

C. 56, 78,41,40,67

D. 95, 41,40,68,57

For More Info And Videos About TAIT-Exam Syllabus And Other Exam Visit My Channel
TAIT च्या 30 प्रश्नपत्रिका PDF
BADSHAHimp Available Request 9765226781
WWW.YouTube.com/BADSHAHimp
Subscribe My Channel

Answer:	B. 88, 20, 59, 97,13

200	निर्देश: दिलेल्या अंक मालिकेतील चुकीची संज्ञा शोधा: 8, 5, 6.5, 11, 26, 68, 207.5 DIRECTIONS: Find the wrong term in the given number series: 8, 5, 6.5, 11, 26, 68, 207.5 ہدایت دے گئے نمبرس سرج مے غلط نمبر کھوجے 8, 5, 6.5, 11, 26, 68, 207.5
	A.68 A.68 A.68
	B.6.5 B.6.5 B.6.5
	C.11 C.11 C.11
	D.26 D.26 D.26

Answer:	C.11 C.11 C.11

For More Info And Videos About TAIT-Exam Syllabus And Other Exam Visit My Channel
TAIT च्या 30 प्रश्नपत्रिका PDF
BADSHAHimp Available Request 9765226781
WWW.YouTube.com/BADSHAHimp
Subscribe My Channel

Question Paper Title : TAIT_PAPER_24

Date of Exam : 2017-12-13 09:00:00.0

1	खालीलपैकी अशुद्ध वाक्य कोणते ?
	A.त्याला बाबांचं दु:ख पाहवत नव्हतं.
	B.त्याने कुठेही मोलमजुरीचे काम केले असते.
	C.बाबांची अवस्था वाईट झाली होती.
	D.ते नेहमी मला सांत्वन करीत असतो.
Answer:	D.ते नेहमी मला सांत्वन करीत असतो.

2	'लयलूट' या शब्दाचा समानार्थी शब्द कोणता ?
	A.चणचण
	B.रेलचेल
	C.लुटलेले
	D.कमतरता
Answer:	B.रेलचेल

3	भारत एक लोकशाही गणराज्य आहे, कारण: India is a democratic republic, because: بھارت ایک جمہوری ہے ملک ہے ، کیونکہ:
	A.त्याचे संसदीय श्रेष्ठत्व A.Its parliamentary supremacy A. اس میں پارلیمانی بالادستی ہے
	B.राज्याचे प्रमुख लोक निर्वाचित असतात B.Head of the state is elected by people B. ریاست کا سربراہ لوگوں کی طرف سے منتخب کیا جاتا ہے.

For More Info And Videos About TAIT-Exam Syllabus And Other Exam Visit My Channel
TAIT च्या 30 प्रश्नपत्रिका PDF
BADSHAHimp Available Request 9765226781
WWW.YouTube.com/BADSHAHimp
Subscribe My Channel

C.त्याची स्वतंत्र न्यायव्यवस्था
C.Its independent Judiciary
C. اس کی آزاد عدلیہ

D.केंद्र आणि राज्यात सामर्थ्य वितरण
D.Its distribution of power between center and state.
D. مرکز اور ریاست کے درمیان اقتدار کی تقسیم.

Answer:
B.राज्याचे प्रमुख लोक निर्वाचित असतात
B.Head of the state is elected by people
B. ریاست کا سربراہ لوگوں کی طرف سے منتخب کیا جاتا ہے.

4 निर्देश: खालीदिलेल्या अक्षराच्या क्रमात काही अक्षरे गहाळ केली आहेत ते त्या क्रमाने खाली दिलेल्या पर्यायांपैकी एक आहे

b _ bb_ _bbb _ aabb _ b _ aaa

DIRECTIONS: In each of the following letter series, same of the letters are missing which are given in that order as one of the alternatives below it.

b _ bb_ _bbb _ aabb _ b _ aaa

دایت جیل کے حرف سرج میں کوئی حرف گمشدہ ہے آپکو انکی شناخت جیل کے اختیارات سے کرنی ہے

b _ bb_ _bbb _ aabb _ b _ aaa

A.aaaaba
A.aaaaba
A.aaaaba

B.aaaaaa
B.aaaaaa
B.aaaaaa

C.ababab
C.ababab
C.ababab

D.ababc
D.ababc
D.ababc

Answer:
A.aaaaba
A.aaaaba
A.aaaaba

For More Info And Videos About TAIT-Exam Syllabus And Other Exam Visit My Channel
TAIT च्या 30 प्रश्नपत्रिका PDF
BADSHAHimp Available Request 9765226781
YouTube WWW.YouTube.com/BADSHAHimp
Subscribe My Channel

5 A आणि B च्या वर्तमान वयांची बेरीज ही त्यांच्या वयांमधील फरकाच्या 7 पट आहे. 5 वर्षांनंतर, त्यांचे एकूण वय त्यांच्या वर्तमान वयांमधील फरकाच्या 9 पट असेल. मोठ्याचे वर्तमान वय काय आहे (वर्षांमध्ये)?

The sum of present ages of A and B is 7 times the difference of their ages. 5 years hence, their total ages will be 9 times the difference of their present ages. What is the present age of elder one (in years)?

کی موجودہ عمر کا مجموعہ ان کی عمروں میں 7 گنا کا فرق ہے۔ 5 سال بعد، ان کی مجموعی عمر میں ان کی موجودہ عمر کا 9 گنا فرق ہوگا۔ بڑے کی موجودہ عمر کیا ہے (سال میں)؟

A.25
A.25
A.25

B.20
B.20
B.20

C.15
C.15
C.15

D.18
D.18
D.18

Answer: B.20
B.20
B.20

6 **सूचना:** खालील प्रश्नात एक उघडलेला फासा दाखविला आहे. उत्तराच्या पर्यायांपैकी कोणता पर्याय 3 या चिन्हाच्या विरुद्ध बाजूला येईल?

DIRECTIONS: In the following question an unfolded dice is given. From the given alternatives which of the following will be opposite of 3?

ہدایات: مندرجہ ذیل سوال میں ایک کھلا ہوا ڈبہ دیا گیا ہے- دیئے گئے متبادلات میں مندرجہ ذیل میں سے کون 3 کے برعکس ہو گا؟



A. 5

B. 2

For More Info And Videos About TAIT-Exam Syllabus And Other Exam Visit My Channel
TAIT च्या 30 प्रश्नपत्रिका PDF
BADSHAHimp Available Request 9765226781
WWW.YouTube.com/BADSHAHimp
Subscribe My Channel

C. 4

D. 6

Answer: A. 5

7 'संयुक्तिक' या शब्दाचा विरुद्धार्थी शब्द कोणता ?

A.योग्य

B.अयोग्य

C.सुसंगत

D.युक्तीपूर्ण

Answer: B.अयोग्य

8 दिलेल्या पर्यायांपैकी कोणती आकृती मुख्य आकृतीचे अचूक प्रतिबिंब आहे?

Which of the answer figure is exactly the mirror image of the given figure?

جواب کی کون سی تصویر، دی گئی تصویر کی بالکل صحیح آئینہ دار تصویر لگتی ہے؟

मुख्य आकृती
Main Figure
اہم تصویر

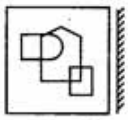

उत्तरासाठी पर्यायी आकृत्या
Answer Figure
جواب کی تصویر

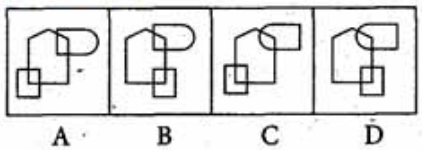

A. (A)

B. (B)

C. (C)

D. (D)

For More Info And Videos About TAIT-Exam Syllabus And Other Exam Visit My Channel
TAIT च्या 30 प्रश्नपत्रिका PDF Available Request 9765226781
WWW.YouTube.com/BADSHAHimp
Subscribe My Channel
BADSHAHimp

Answer:	C. (C)

9	आपण आपल्या नि:पक्षपाती स्वभावाला च्यामार्फत सादर करणार- You will demonstrate your impartial behavior through— آپ اپنے غیر جانبدار رویے کا مظاہرہ کریں گے بذریعہ
	A.आपण आपला उच्च स्वाभिमान व अहंकारी स्वभाव राखून ठेवणार A.Maintaining your own high self-esteem and egoistic behavior A.اپنے اعلی خود اعتمادی اور انا والے رویے کو برقرار رکھتے ہوئے
	B.संपूर्ण शिक्षक वर्गाला टीका करणार B.Criticizing the teacher community as a whole B.مجموعی طور پر استاد برادری پر تنقید کرتے ہوئے
	C.विद्यार्थ्यांमध्ये जाऊन शिक्षकांना मारहाण करणार C.Assaulting the teachers in the midst of students C.طلباء کے درمیان اساتذہ کی تذلیل
	D.आपल्या स्व:चे स्वभाव अधिक संतुलित व प्रामाणिक करणार D.Making your own behavior more balanced and fair. D.اپنے رویے کو مزید متوازن اور منصفانہ بنانا.

Answer:	D.आपल्या स्व:चे स्वभाव अधिक संतुलित व प्रामाणिक करणार D.Making your own behavior more balanced and fair. D.اپنے رویے کو مزید متوازن اور منصفانہ بنانا.

For More Info And Videos About TAIT-Exam Syllabus And Other Exam Visit My Channel
TAIT च्या 30 प्रश्नपत्रिका PDF
BADSHAHimp Available Request 9765226781
WWW.YouTube.com/BADSHAHimp
Subscribe My Channel

10 विधान:
शासकीय धोरणांच्या विरोधात आंदोलन करणार्या परिसरातील विद्यार्थी पकडले गेले.

कृतीचा कोर्स:
I. विद्यार्थ्यांना कॅम्पसवरून निलंबित करावे.
II. विद्यार्थ्यांना पोलिसांकडे सोपवावे.

Statement:
Students inside the campus were caught protesting against the policy of the government.
Course of actions:
I. The students should be suspended from campus.
II. The students should be handed over to the police

بیان:
کیمپس کے اندر طلباء حکومتی پالیسی کے خلاف احتجاج کرتے ہوئے پکڑے گئے۔

لائحہ عمل:
I۔طلباء کو کیمپس سے معطل کر دینا چاہیے۔
II۔ طلباء کو پولیس کے حوالے کر دینا چاہیے۔

A.फक्त I अनुसरून आहे
A.Only I follows
A. صرف I لاگو ہو گا۔

B.फक्त II अनुसरण करते आहे
B.Only II follows
B. صرف II لاگو ہو گا۔

C.एकतर I किंवा II अनुसरून आहे
C.Either I or II follows
C. I یا II میں سے ایک لاگو ہو گا۔

D.I किंवा II दोन्हीपैकी काहीही अनुसरण करत नाही
D.Neither I nor II follows
D. I اور II میں سے کوئی بھی لاگو نہیں ہو گا۔

Answer: D.I किंवा II दोन्हीपैकी काहीही अनुसरण करत नाही
D.Neither I nor II follows
D. I اور II میں سے کوئی بھی لاگو نہیں ہو گا۔

11 शेवाळ आणि कवकेचे सहजीवी संबंध काय आहे?

What is the symbiotic relationship of algae and fungi known as?

الگائی اور فنگی کے سہجیوی تعلقات کوجانا جاتا ہے؟

For More Info And Videos About TAIT-Exam Syllabus And Other Exam Visit My Channel
TAIT च्या 30 प्रश्नपत्रिका PDF
BADSHAHimp Available Request 9765226781
WWW.YouTube.com/BADSHAHimp
Subscribe My Channel

A.शैवाक
A.Lichens
A. لائیکین

B.नेचा
B.Ferns
B. فرنس

C.पाकळ्या
C.Petals
C. پنکھڑیوں

D.फूशैवाल
D.Fu algae
D. فو طحالب

Answer: A.शैवाक
A.Lichens
A. لائیکین

12 सूचना: खालील प्रश्नातील चार पर्यायांपैकी, तीन पर्याय असे आहेत की प्रत्येकातील 3 शब्द एकमेकांशी (A), (B), (C), (D) आणि (E) अशा दिलेल्या 5 पर्यायांपैकी कोणत्याही एका दृष्टीने एकमेकांशी संबंधित आहेत. आणि संबंध दर्शविणारा 1 पर्याय आहे जो खालील आकृतींद्वारा दाखविलेला नाही. ह्या अटीची पूर्तता करणारा संबंध म्हणजे तुमचे उत्तर असेल.

DIRECTION: Out of the four alternatives in each of the following questions, three alternatives are such that the three words in each are related among themselves in one of the five ways represented by (A), (B), (C), (D) and (E) below. And one of the alternatives represents a relationship which is not represented by any of the figures given below. The relationship that complies this condition is your answer.

ہدایت: مندرجہ ذیل سوال میں چار متبادل میں سے، تین متبادل ایسے ہیں کہ ہر ایک میں تین الفاظ آپس میں پانچ طریقوں میں سے ایک میں کے ذریعہ کی گئی ہے۔ اور ایک متبادل ایسے تعلق کی نمائندگی کرتا (A)،(B)،(C)،(D)&(E)متعلق ہیں جن کی نمائندی مندرجہ ذیل ہے جس کی نمائندگی نیچے دیے گئے کسی بھی خاکے کے ذریعہ نہیں کی جاتی ہے۔ اس شرط پر پورا اترنے والی شرط آپ کا جواب ہے



(a) Director, Engineer, Musician / संचालक, अभियंता, संगीतकार/معدنیات، لوہا، تانبا

(b) Apple, Orange, Mango / सफरचंद, संत्र, आंबा/مہتمم، بینٹر، گلوکار

(c) Fruit, Mango, Grass / फळ, आंबा, गवत/بیج، پتی، جڑ

(d) Oxygen, Air, Water / प्राणवायू, हवा, पाणी/پستن، انجن، پہیہ

A. (A)

B. (B)

C. (C)

D. (D)

Answer: B. (B)

For More Info And Videos About TAIT-Exam Syllabus And Other Exam Visit My Channel
TAIT च्या 30 प्रश्नपत्रिका PDF
BADSHAHimp Available Request 9765226781
WWW.YouTube.com/BADSHAHimp
Subscribe My Channel

13 सूचना: दोन विधाने आणि त्यानंतर दोन निष्कर्ष, I आणि II दिले आहेत. ही विधाने सामान्यतः ज्ञात वस्तुस्थितीपेक्षा भिन्न असली तरी सत्य आहेत असे समजा. दिलेल्यापैकी कोणता निष्कर्ष दिलेल्या विधानांवरुन नक्की काढता येऊ शकतो हे तुम्ही ठरवायचे आहे.तुमचे उत्तर सूचित करा.

विधाने:
(a) सर्व इंग्लिश मूवीज हिंसक असतात.
(b) काही लोकांना इंग्लिश मूवीज पाहायला आवडतं.
निष्कर्ष:
I. सर्व इंग्लिश मूवीज पाहणाऱ्या लोकांना हिंसा आवडते.
II. All people who like violence watch English movies.

DIRECTION: Two statements are given following by two conclusions, I, and II. You have to consider that statements to be true, even if they seem to be at variance from commonly known facts. You are to decide which of the given conclusions can definitely be drawn from the given statements. Indicate your answer.

Statements:
(a) All English movies are violent.
(b) Some people like watching English movies.

Conclusion:
I. All people watching English movies like violence.
II. All people who like violence watch English movies.

ہدایات: دو سٹیٹمنٹ جوکہ دو خلاصوں پر مشتمل ہیں. I، اور II. حقائق اپ کو وہ سٹیٹمنٹ درست ماننا ہے، اگرچہ دکھنے میں وہ بہت سارے ست مطبقت رکھتی ہو۔ اپ کو دیے گے خلاصوں میں سے یقینی طور پر اسے اختیار کرنا ہے جو سٹیٹمنٹ سے نکلا ہو. اپنا جواب تلاش کرے.

اظہار بیان:
تمام انگریزی فلمیں تشددکن ہوتی ہے.
کچھ لوگ انگریزی فلمیں دیکھنا پسند کرتے ہے.
نتائج:
I.انگریزی فلمیں دیکھنے والے لوگ تشدد پسند کرتے ہے.
II.تمام لوگ جو تشدد پسند کرتے ہے انگریزی فلمیں دیکھتے ہے.

A.केवळ I निष्कर्ष निघेल
A.Only I follows
A.خالی I تعاقب کرتا ہے

B.केवळ II निष्कर्ष निघेलs II
B.Only II follows II
B.خالی II تعاقب کرتا ہے

C.Nएकतर I nकिंवा II निष्कर्ष निघेल
C.Neither I nor II follows
C. نہ I نہ II تعاقب کرتا ہے

For More Info And Videos About TAIT-Exam Syllabus And Other Exam Visit My Channel
TAIT च्या 30 प्रश्नपत्रिका PDF
BADSHAHimp Available Request 9765226781
WWW.YouTube.com/BADSHAHimp
Subscribe My Channel

D.दोन्ही I आणि II निष्कर्ष निघेल
D.Both I and II follows
D.دونوں I اور II تعاقب کرتے ہے

Answer: A.केवळ I निष्कर्ष निघेल
A.Only I follows
A.خالی I تعاقب کرتا ہے

14 आपले स्वत:चे वर्तन नियोजन आणि निरिक्षण करण्याची क्षमता म्हणजे

The ability to organic and monitor our own behaviour is

اپنے رویہ کی تنظیم کاری اور اس کے دیکھ بھال کی صلاحیت_____ کہلاتی ہے۔

A.आत्म–नियमन
A.Self–regulation
A.خود نظمی (Self–regulation)

B.स्व-नियंत्रण
B.Self–control
B.ضبطِ نفس

C.स्व:-सामर्थ्य
C.Self–efficacy
C.کسرِ نفسی

D.Self–instruction
D.Self–instruction
D.اپنے آپ کی پابندی

Answer: A.आत्म–नियमन
A.Self–regulation
A.خود نظمی (Self–regulation)

15 कोनाच्या खालील गटांपैकी कोण त्रिकोणाचे कोन दर्शवतात?

Which of the following groups of angles represent the angles of a triangle?

زاویہ کے مندرجہ ذیل گروپوں میں سے کون سے ایک مثلث کے زاویہ کی نمائندگی کرتے ہیں؟

A.45°, 55°, 60°
A.45°, 55°, 60°
A.45°, 55°, 60°

For More Info And Videos About TAIT-Exam Syllabus And Other Exam Visit My Channel
TAIT च्या 30 प्रश्नपत्रिका PDF
BADSHAHimp Available Request 9765226781
WWW.YouTube.com/BADSHAHimp
Subscribe My Channel

B.50°, 60°, 70°
B.50°, 60°, 70°
B.50°, 60°, 70°

C.50°, 70°, 55°
C.50°, 70°, 55°
C.50°, 70°, 55°

D.65°, 70°, 75°
D.65°, 70°, 75°
D.65°, 70°, 75°

Answer: B.50°, 60°, 70°
B.50°, 60°, 70°
B.50°, 60°, 70°

16 सूचना: खालील प्रश्नांमध्ये दिलेल्या पर्यायांमधून संबंधित अक्षर/शब्द/संख्या निवडा.

डुलकी : थकवा ::

DIRECTIONS: In the following question, select the related letter/word/number from the given alternatives.

Nap : Fatigue ::

سمت: مندرجہ ذیل سوال میں، دیے گئے متبادل سے متعلقہ حرف/لفظ/نمبر منتخب کریں۔

جھپکی : تھکان ::

A.कठीण : वेदनादायक
A.Difficult : Painful
A.مشکل : تکلیف دہ

B.वेदनाशामक: दुखणे
B.Aspirin: Pain
B.ایسپرین : درد

C.व्यायाम : ताकद
C.Exercise : Strength
C.کسرت : قوت

D.डॉक्टर : रोग
D.Doctor : Disease
D.ڈاکٹر : بیماری

Answer: B.वेदनाशामक: दुखणे
B.Aspirin: Pain
B.ایسپرین : درد

For More Info And Videos About TAIT-Exam Syllabus And Other Exam Visit My Channel
BADSHAHimp TAIT च्या 30 सराव्पत्रिका PDF Available Request 9765226781 WWW.YouTube.com/BADSHAHimp Subscribe My Channel

17	कोणत्या देशाला ‘शुगर-बाऊल ऑफ दि वर्ल्ड’ म्हटले जाते? Which country is called the ‘Sugar- Bowl of the world’? دنیا کی شوگر باؤل کے نام سے کون سا ملک جانا جاتا ہے۔
	A.व्हेनेझुएला A.Venezuela A.وینیزوئلہ
	B.क्यूबा B.Cuba B.کیوبا
	C.पॅराग्वे C.Paraguay C.پیراگوئے
	D.उरुग्वे D.Uruguay D.اُروگوئے
Answer:	B.क्यूबा B.Cuba B.کیوبا
18	‘ तो पिकलेला आंबा दे पाहू.’ या वाक्यातील विशेषण ओळखा.
	A.तो
	B.पिकलेला
	C.आंबा
	D.दे पाहू.
Answer:	B.पिकलेला

19	खालील आकृतीमध्ये किती त्रिकोण आहेत? How many triangles are there in the following figure? مندرجہ ذیل تصویر میں کتنے مُثَلَّث ہیں؟ 
	A. 38
	B. 24
	C. 40
	D. 32
Answer:	A. 38
20	खालीलपैकी कोणते कॅल्शियमचे स्रोत नाही? Which of the following is not a source of calcium? مندرجہ ذیل میں سے کون کیلشیم کا ایک ذریعہ نہیں ہے؟
	A.दूध A.Milk A. دودھ
	B.दही B.Curd B. دہی
	C.पनीर C.Paneer C. پنیر
	D.डाळ D.Dals D. دالیں
Answer:	D.डाळ D.Dals D. دالیں

21 दिलेल्या शब्दापासून खालील शब्दांपैकी कोणते शब्द तयार केले जाऊ शकत नाहीत?
RESURRECTIONIST

Which of the following words cannot be formed from the given word?
RESURRECTIONIST

دیےگیے لفظ سے مندرجہ ذیل الفاظ میں سے کونسا نہیں بنایا جاسکتا ہے؟
‘RESURRECTIONIST’

A.TOURIST
A.TOURIST
A.TOURIST

B.NOISE
B.NOISE
B.NOISE

C.SORCERER
C.SORCERER
C.SORCERER

D.TENDER
D.TENDER
D.TENDER

Answer: D.TENDER
D.TENDER
D.TENDER

22 उत्पादित वस्तु जर शर्करावि‍रहीत असेल तर शर्करा प्रमाण किती असेल?

If the product is said to be sugar free it contains what amount of sugar?

اگر مصنوعات کو شوگر فری کہا جاتا ہے تو اسمیں شوگر کی کتنی مقدار ہوتی ہے۔

A.प्रति सेव्हिंगसाठी 1.5 ग्रॅमपेक्षा जास्त नाही
A.Not more than 1.5 gram per serving
A.ایک بار کے استعمال میں 1.5گرام سے زیادہ نہیں

B.10 ग्रामपेक्षा कमी
B.Less than 10g
B.10گرام سے زیادہ نہیں

C.0.5 ग्राम / सर्वींगपेक्षा कमी
C.Less than 0.5g/ serving
C.0.5گرام سے کم

D.वरील पैकी एकही नाही
D.None of the above
D.مندرجہ بالا میں سے کوئی بھی

Answer: C.0.5 ग्राम / सर्वींगपेक्षा कमी
C.Less than 0.5g/ serving
C.0.5 گرام سے کم

23 फिरणारा न्युट्रॉन तारा रेडिओ वेव सोडतो आणि त्याला म्हणतात

A spinning neutron star emits radio-wave and is called

ایک گردش کرنے والا نیوٹرون تارہ ریڈیو لہر پیدا کرتا ہے اور اس کو _____ کہا جاتا ہے۔

A.सुपरनोवा
A.Supernova
A.سپرنوا

B.पल्सार
B.Pulsar
B.پلسر

C.पांढरा ड्राफ
C.White dwarf
C.سفید ڈوارف

D.प्रोटोस्टार
D.Protostar
D.پروٹوسٹر

Answer: B.पल्सार
B.Pulsar
B.پلسر

24 8 लाल आणि 3 निळे चेंडू असलेल्या पिशवीमधून दोन चेंडू काढले. ते दोन्ही निळे असण्याची शक्यता काढा?

Two balls are to be drawn from a bag containing 8 red and 3 blue balls. Find the chance that they will both be blue?

دو گیندوں کو ایک بیگ سے نکالا جاتا ہے جن میں 8 لال اور 3 نیلے گیند شامل ہیں۔ اس امکان کو تلاش کریں کہ وہ دونوں نیلے ہو جائیں گے؟

A.1/5
A.1/5
A.1/5

B.3/55
B.3/55
B.3/55

C.1/13
C.1/13
C.1/13

D.14/45
D.14/45
D.14/45

Answer: B.3/55
B.3/55
B.3/55

25 पुढील जोडशब्द पूर्ण करा . ‘ जमीन ----------

A.आसमान

B.जुमला

C.शेत

D.जर

Answer: B.जुमला

26 पितळ एक धातूंचे मिश्रण आहे:-

Brass is an alloy of:-

پیتل _____ کا مرکب ہوتا ہے۔

A.Cu आणि Zn
A.Cu and Zn
A.Cu اور Zn

B.Cu आणि Fe
B.Cu and Fe
B.Cuاور Fe

C.Sn आणि Pb
C.Sn and Pb
C.Snاور Pb

D.Cu आणि Al
D.Cu and Al
D.Cuاور Al

Answer: A.Cu आणि Zn
A.Cu and Zn
A.Cu اور Zn

27 सूचना: खाली दिलेली माहिती काळजीपूर्वक वाचा आणि दिलेल्या प्रश्नांची उत्तरे द्या.
आराधना, बंधन, चांदनी, दामिनी, एहसास आणि फरेब ही सहा नाटके सोमवार ते शनिवार दर दिवशी दाखवली जाणार आहेत.
(I) आराधना एहसासच्या एक दिवस आधी दाखवले गेले पाहिजे.
(II) चांदनी मंगळवारी दाखवले गेले पाहिजे
(III) बंधन फरेब दाखवला जाण्याच्या दुस-या दिवशी दाखवले जायला हवे.
(IV) दामिनी शुक्रवारीच दाखवला गेले पाहिजे आणि बंधन त्याच्या लगेच आधी येता कामा नये.
(V) एहसासला वेळापत्रकाच्या अखेरच्या दिवशी दाखवले गेले पाहिजे.
दामिनी नाटक कोणत्या नाटकांच्या जोडीच्या मध्ये असेल?

DIRECTIONS: Read the following information carefully and answer the given questions.
Six plays Aradhna, Bandhan, Chandni, Damini, Ehsaas and Fareb are to be staged, one on each day from Monday to Saturday.
(I) Aradhna must be staged a day before Ehsaas.
(II) Chandni must not be staged on Tuesday.
(III) Bandhan must be staged on the day following the day on which Fareb is staged.
(IV) Damini must be staged on Friday only and should not be immediately preceded by Bandhan.
(V) Ehsaas must not be staged on the last day of the schedule.
Play Damini is between which of the following pair of plays?

ہدایات: مندرجہ ذیل معلومات کو دھیان سے پڑھیں اور دیے گئے سوالوں کے جواب دیں۔
چھ ڈرامے آرادھنا، بندھن، چاندنی، دامنی، احساس اور فریب میں سے ہر ایک کو پیر سے سنیچر تک ہر دن اسٹیج کیا جانا ہے۔
(I) آرادھنا کو احساس سے ایک دن پہلے اسٹیج کیا جانا چاہیے۔
(II) چاندنی کو منگل کے دن اسٹیج نہیں کیا جانا چاہیے۔
(III) بندھن کو لازمی طور پر فریب اسٹیج کیے جانے والے دن کے اگلے دن اسٹیج کیا جانا چاہیے۔
(IV) دامنی لازمی طور پر صرف جمعہ کو اسٹیج کیا جانا چاہیے اور بندھن سے فوری پہلے نہیں ہونا چاہیے۔
(V) احساس کو شیڈول کے آخری دن اسٹیج نہیں کیا جانا چاہیے۔
ڈرامہ دامنی مندرجہ ذیل ڈراموں کی جوڑی میں سے کس کے درمیان ہے؟

A.बंधन आणि एहसास
A.Bandhan and Ehsaas
A.بندھن اور احساس

B.एहसास आणि फारेब
B.Ehsaas and Fareb
B.احساس اور فریب

C.अराधना आणि एहसास
C.Aradhna and Ehsaas
C.آرادھنا اور احساس

D.चांदनी आणि एहसास
D.Chandni and Ehsaas
D.چاندنی اور احساس

Answer: D.चांदनी आणि एहसास
D.Chandni and Ehsaas
D.چاندنی اور احساس

28 सूचना: खाली दिलेली माहिती काळजीपूर्वक वाचा आणि दिलेल्या प्रश्नांची उत्तरे द्या.
आराधना, बंधन, चांदनी, दामिनी, एहसास आणि फरेब ही सहा नाटके सोमवार ते शनिवार दर दिवशी दाखवली जाणार आहेत.
(I) आराधना एहसासच्या एक दिवस आधी दाखवले गेले पाहिजे.
(II) चांदनी मंगळवारी दाखवले गेले पाहिजे
(III) बंधन फरेब दाखवला जाण्याच्या दुस-या दिवशी दाखवले जायला हवे.
(IV) दामिनी शुक्रवारीच दाखवला गेले पाहिजे आणि बंधन त्याच्या लगेच आधी येता कामा नये.
(V) एहसासला वेळापत्रकाच्या अखेरच्या दिवशी दाखवले गेले पाहिजे.
खालीलपैकी कोणते नाटक सोमवारी दाखवले जाईल?

DIRECTIONS: Read the following information carefully and answer the given questions.
Six plays Aradhna, Bandhan, Chandni, Damini, Ehsaas and Fareb are to be staged, one on each day from Monday to Saturday.
(I) Aradhna must be staged a day before Ehsaas.
(II) Chandni must not be staged on Tuesday.
(III) Bandhan must be staged on the day following the day on which Fareb is staged.
(IV) Damini must be staged on Friday only and should not be immediately preceded by Bandhan.
(V) Ehsaas must not be staged on the last day of the schedule.
Which of the following plays is staged on Monday?

ہدایات: مندرجہ ذیل معلومات کو دھیان سے پڑھیں اور دیے گئے سوالوں کے جواب دیں۔
چھ ڈرامے آرادھنا، بندھن، چاندنی، دامنی، احساس اور فریب میں سے ہر ایک کو پیر سے سنیچر تک ہر دن اسٹیج کیا جانا ہے۔
(I) آرادھنا کو احساس سے ایک دن پہلے اسٹیج کیا جانا چاہیے۔
(II) چاندنی کو منگل کے دن اسٹیج نہیں کیا جانا چاہیے۔
(III) بندھن کو لازمی طور پر فریب اسٹیج کیے جانے والے دن کے اگلے دن اسٹیج کیا جانا چاہیے۔
(IV) دامنی لازمی طور پر صرف جمعہ کو اسٹیج کیا جانا چاہیے اور بندھن سے فوری پہلے نہیں ہونا چاہیے۔
(V) احساس کو شیڈول کے آخری دن اسٹیج نہیں کیا جانا چاہیے۔
مندرجہ ذیل ڈراموں میں سے کونسا پیر کو اسٹیج کیا گیا؟

A.एहसास
A.Ehsaas
A.احساس

B.फारेब
B.Fareb
B.فریب

C.चांदनी
C.Chandni
C.چاندنی

D.बंधन
D.Bandhan
D.بندھن

Answer: B.फारेब
B.Fareb
B.فریب

29

सूचना: खालील प्रश्नात, दिलेल्या पर्यायांमधून नातेसंबंध सांगणारी आकृती निवडा.

DIRECTIONS: In the question below, select the related figure from the given alternatives.

ہدایات: ذیل کے سوال میں، دئے گئے متبادلات میں سے متعلقہ تصویر منتخب کریں۔

Problem Figures:



(A) (B) (C) (D)

Answer Figures:



(1) (2) (3) (4)

A. 1

B. 2

C. 3

D. 4

Answer: A. 1

30

? x 54 = 6588

? x 54 = 6588

? x 54 = 6588

A.132
A.132
A.132

	B.136 B.136 B.136
	C.124 C.124 C.124
	D.122 D.122 D.122
Answer:	D.122 D.122 D.122
31	1 सेकंदाला तासांमध्ये रूपांतरीत करा: Convert 1second into hour: 1 سیکنڈ کو گھنٹہ میں بدلیں
	A.0.00028 ता A.0.00028 h A.0.00028گھنٹے
	B.0.00032 ता B.0.00032 h B.0.00032گھنٹے
	C.0.0028 ता C.0.0028 h C.0.0028گھنٹے
	D.0.0032 ता D.0.0032 h D.0.0032گھنٹے
Answer:	A.0.00028 ता A.0.00028 h A.0.00028گھنٹے
32	‘ पित्राज्ञा ’ या शब्दाची संधी सोडवा.
	A.पि + त्राज्ञा

	B.पिता + आज्ञा
	C.पितर + आज्ञा
	D.पितृ + आज्ञा
Answer:	D.पितृ + आज्ञा

33	4 आणि 16 यांच्या मधले प्रमाण शोधा. Find the mean proportion between 4 and 16? 4 اور 16 کے درمیان درمیانہ تناسب معلوم کریں؟
	A.4 A.4 A.4
	B.8 B.8 B.8
	C.10 C.10 C.10
	D.16 D.16 D.16
Answer:	B.8 B.8 B.8

34	Fill in the blank with the correct article. They were too poor to afford_____ telephone
	A.a
	B.an
	C.the
	D.No article required

Answer: A.a

35 एका चित्रपटात एका तरुण मुलीच्या असे लक्षात येते की हंसांचा एक थवा ती जेथे जाईल तेथे तिच्या मागोमाग येतो कारण त्यांच्या जन्म झाल्यावर त्यांनी पाहिलेली पहिली वस्तू तीच होती. हे याचे उदाहरण आहे

In a movie a young girl finds that a gaggle of geese follows her wherever she goes because she was the first object they saw after they were born. This is an example of

ایک فلم میں ایک نوجوان لڑکی کو معلوم ہوتا ہے کہ وہ جہاں کہیں جاتی ہے راج ہنسوں کا ایک جھنڈ اس کا پیچھا کرتا ہے کیونکہ اس نے پیدائش کے بعد وہ پہلی شئے تھی جسے اس نے دیکھا۔ یہ ایک مثال ہے کس کی

A.जतन
A.conservation
A.تحفظ

B.छापणे
B.imprinting
B.نفسیات نومولود

C.आत्मकेंद्रितपणा
C.egocentrism
C.خود مرکزیت

D.मुलभूत विश्वास
D.basic trust
D.بنیادی بھروسہ

Answer: B.छापणे
B.imprinting
B.نفسیات نومولود

36 एक व्यक्तीला विशिष्ट वेळेमध्ये विशिष्ट ठिकाणी पोहचायचे आहे आणि जर तो 4 किमी/तास या गतीने चालला तर 15 मिनिटे उशीरा पोहचेल आणि जर तो 6 किमी/तास गतीने चालला तर तो 10 मिनिटे आधी पोहचेल हे त्याला समजले. त्याला कापायचे अंतर काढा.

A person has to reach a certain place at a certain time and he finds that he will be 15 minutes late if he walks at 4 km/hr and 10 minute earlier, if he walks at 6 km/hr. Find the distance he has to cover?

کسی شخص کو ایک خاص وقت پر ایک مخصوص جگہ تک پہنچنا ہے اور اسے معلوم ہوتا ہے کہ اگر وہ 4 کلومیٹر / گھنٹہ کی رفتار سے چلتا ہے تو15mm پہلے پہنچے گا. فاصلہ معلوم کریں جو اسےطے کرنا ہے؟

A.3 किमी
A.3 km
A.3 کلو میٹر

B.4 किमी
B.4 km
B.4 کلو میٹر

C.5 किमी
C.5 km
C.5 کلو میٹر

D.6 किमी
D.6 km
D.6 کلو میٹر

Answer: C.5 किमी
C.5 km
C.5 کلو میٹر

37 खालीलपैकी सर्वांत लहान अपूर्णांक शोधा

Find the smallest of the following fractions

مندرجہ ذیل کسور میں سے سب سے چھوٹی کسر تلاش کریں

A.85/96
A.85/96
A.85/96

B.23/88
B.23/88
B.23/88

C.13/45
C.13/45
C.13/45

D.212/841
D.212/841
D.212/841

Answer: D.212/841
D.212/841
D.212/841

38 'कारस्थानी' या शब्दाचा समानार्थी शब्द कोणता ?

A.मसलत्या

	B.निष्कपटी
	C.भाबडा
	D.कामगार
Answer:	A.मसलत्या

39	मिठाद्वारे कोणते खनिज मिळते? Which mineral is provided by table salt? انمیں سے کون سی معدنیات کھانے کے نمک میں دی جاتی ہے؟
	A.सोडियम A.Sodium A. سوڈیم
	B.तांबे B.Copper B. کاپر
	C.चांदी C.Silver C.چاندی
	D.यापैकी एकही नाही D.None of these D. ان میں سے کوئی بھی نہیں
Answer:	A.सोडियम A.Sodium A. سوڈیم

40	खालीलपैकी कोणती भारतातील UNESCO चा जागतिक वसा असलेले ठिकाणे आहे? Which of the following is/are UNESCO World Heritage sites in India? ان میں سے کون سی جگہ یو این ای ایس سی او کی عالمی ورثہ کی جگہ ہے
	A.अजंठा आणि एलोरा गुहा A.Ajanta & Ellora Caves A.اجنتا اور ایلورا کی غاریں

B.सांची सुप्त
B.Sanchi Stupa
B.سانچی استوپ

C.हे दोन्ही
C.Both of these
C.اوپر دئے ہوئے دونوں

D.यांपैकी कोणतेही नाही
D.None of these
D.ان میں سے کوئی نہیں

Answer: C.हे दोन्ही
C.Both of these
C.اوپر دئے ہوئے دونوں

41 आपल्या वरिष्ठाशी आपले वैर आहे. तो त्याचे अनुभव त्याच्या कनिष्ठांसमोर अभिमानाने सांगत आहे. परंतु आपण स्वत:ला आजच्या घडीला वर्गातील शिकवणीमध्ये जास्त कुशल, प्रमाणिक समजतो. आपण त्या शिक्षकासोबत चांगले संबंध कसे बनवणार?

Your superior has enmity with you. He discusses his experiences with pride before juniors. But you feel yourself more skillful, sincere and near to contemporary class-room teaching. How could you make a good rapport with that teacher?

آپ کے سینیئر کی آپ کے ساتھ دشمنی ہے.انہوں نے جونیئرز کے سامنے فخر کے ساتھ اپنے تجربات پر تبادلہ خیال کیا.لیکن آپ اپنے آپ کو زیادہ قابل، مخلص اور معاصر کلاس روم کے درس کے قریب محسوس کرتے ہیں.آپ اس ٹیچر کے ساتھ کس طرح اچھا دوستانہ تعلق قائم کر سکتے ہیں؟

A.त्याच्यात असलेल्या गुणांवर व त्याच्या दृष्टिकोनावर चर्चा करून
A.By debating his points and outlooks
A.اس کے نقطہ نظر اور نتائج پر بحث کرتے ہوئے

B.) त्याला दुर्लक्ष करून
B.By ignoring him
B.اسے نظر انداز کرکے

C.त्याला धमकवून व मारहाण करून
C.By attacking and assaulting him
C.اس پر حملہ اور اقدام کرتے ہوئے

D.त्याला त्याच्यातील अज्ञान व कमतरतेची जाणीव करून देण्यासाठी योग्य ते प्रयत्न करा.
D.By making favorable efforts to make him realize his ignorance and weaknesses.
D.اسے اس کی کم علمی اور کمزوریوں کا احساس دلانے کے لئے مناسب کوششوں سے.

Answer: D.त्याला त्याच्यातील अज्ञान व कमतरतेची जाणीव करून देण्यासाठी योग्य ते प्रयत्न करा.
D.By making favorable efforts to make him realize his ignorance and weaknesses.
D.اسے اس کی کم علمی اور کمزوریوں کا احساس دلانے کے لئے مناسب کوششوں سے.

42 एका दृष्टीकोनात एकसमान बदल म्हणजे-

Congruent change of an attitude means

کسی رویے کی موافق تبدیلی کا مطلب ہے:

A.मध्यभागी घडत असलेले बदल
A.Change taking place in central
A.تبدیلی مرکز میں ہوتی ہے

B. एकाच दिशेने होत असलेले बदल
B.Change taking place in same direction
B.تبدیلی ایک سمت میں ہوتی ہے

C.उलट दिशेने होत असलेले बदल
C.Change taking place in opposite direction
C. تبدیلی مخالف سمت میں ہوتی ہے

D. यापैकी एकही नाही
D.None of these
D.ان میں سے کوئی نہیں

Answer: B. एकाच दिशेने होत असलेले बदल
B.Change taking place in same direction
B.تبدیلی ایک سمت میں ہوتی ہے

43 10 ते 11 वाजण्यादरम्यान मिनिट आणि तास काटा परस्परांशी तंतोतंत जुळेल किंवा 0° कोन तयार करेल?

At what time between 10 to 11 O’ clock minute and hour hand will coincide or makes 0° angle?

10 سے 11 بجے کے درمیان کس وقت منٹ اور گھنٹہ کی سوئیاں آپس میں ملیں گی؟

(A) $10:43\frac{7}{11}$

(B) $10:38\frac{2}{11}$

(C) $10:54\frac{6}{11}$

(D) $10:10\frac{10}{11}$

Answer: (C) $10:54\frac{6}{11}$

44 बुद्धिमत्तेची बिगर-मौखिक चाचणी यांचेसाठी सुयोग्य आहे

Non verbal test of intelligence is suitable for

ذہانت کی غیر زبانی ٹسٹ موزوں ہے برائے

A.बहिरा आणि मुका
A.deaf and dumb
A.گونگا اور بہرا

B.साक्षर
B.literates
B.پڑھا لکھا

C.मागास मुले
C.backward children
C.پچھڑے ہوئے بچوں

D.वरीलपैकी सर्व
D.all of the above
D.درج بالاسبھی

Answer: D.वरीलपैकी सर्व
D.all of the above
D.درج بالاسبھی

45 DIRECTIONS: A sentence with an underlined word is given below. Find the word which is opposite in meaning to the underlined word from the given options.
This coat has a special surface that repels moisture.

A.Attracts

B.Removes

C.Rejects

D.Dismisses

Answer: A.Attracts

46 बिंदू A हा बिंदू B च्या पूर्वेस 9 मी. वर आहे. बिंदू C हा बिंदू A च्या दक्षिणेस 5 मी. वर आहे. बिंदू D हा बिंदू C च्या पश्चिमेस 3 मी. वर आहे. बिंदू E हा बिंदू D च्या उत्तरेस 5 मी. वर आहे. बिंदू F हा बिंदू D च्या दक्षिणेस 7 मी. वर आहे. खालीलपैकी कोणते बिंदू एका सरळ रेषेत आहेत?

Point A is 9m towards the east of point B. Point C is 5m towards the south of point A. Point D is 3m towards the west of point C. Point E is 5m towards the north of point D. Point F is 7m towards the south of point D. Which of the following points are in a straight line?

پوائنٹ A پوائنٹ B کے 9 میٹر مشرق میں ہے- پوائنٹ A پوائنٹ C کے 5 میٹر کی دوری پر ہے- پوائنٹ C پوائنٹ D کے جنوب میں 5 میٹر کے فاصلے پر ہے- پوائنٹ D پوائنٹ E مغرب میں 3 میٹر کی دوری پر ہے اور پوائنٹ D پوائنٹ F کے شمال میں 5 میٹر کے فاصلے پر ہے- تو مندرجہ ذیل پوائنٹس میں سے کون پوائنٹ سیدھی لکیر میں ہیں؟

A.FCD
A.FCD
A.FCD

B.AEB
B.AEB
B.AEB

C.EBD
C.EBD
C.EBD

D.ECA
D.ECA
D.ECA

Answer: B.AEB
B.AEB
B.AEB

47 **सूचना**: खालील प्रश्नात उत्तरातील पर्यायांपैकी कोणत्या पर्यायी आकृतीत प्रश्नातील आकृती अंतर्भूत आहे?

DIRECTIONS: In the given question find the answer figure in which question figure is embedded.

ہدایات: دیئے گئے سوال میں سے اس جواب والی تصویر کو تلاش کریں جس میں سوال کی تصویر منسلک ہے-

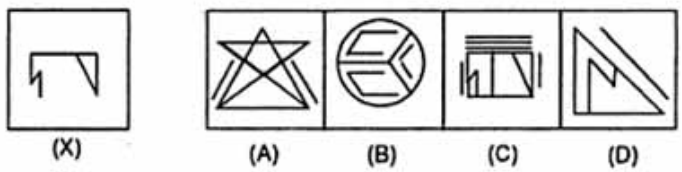

A. (A)

B. (B)

C. (C)

D. (D)

Answer: C. (C)

48 खालील प्रश्नात एक उघडलेला फासा दाखविला आहे आणि उत्तराचे पर्याय म्हणून चार पूर्ण फासे दाखविले आहेत. उघडलेला फासा परत बंद केल्यानंतर कुठचा फासा तयार होईल तो योग्य पर्याय निवडा.

DIRECTIONS: An unfolded dice is given, from the answer figures which figure is similar when unfolded to the question figure.

ہدایات: ایک کھلا ہوا ڈبہ دیا گیا ہے، بتائیے کہ جب سوال کی تصویر کو کھولا جاتا ہے تو جواب کی تصاویر میں سے کون سی تصویر اسی طرح کی ہے۔

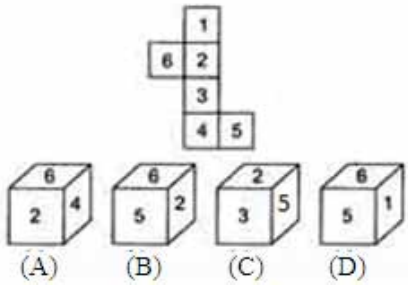

A. (A)

B. (B)

C. (C)

D. (D)

Answer: C. (C)

49 “मन ही एक कोरी पाटी असते” हे विधान यांनी केले

The statement “The mind is an empty slate” was given by

"دماغ ایک خالی سلیٹ ہے" یہ بات کس نے کہی تھی

A.ॲरिस्टॉटल
A.Aristotle
A.ارسطو

B.सॉक्रेटीस
B.Socrates
B.سقراط

C.टोलेमी
C.Ptolemy
C.پولیمی

D.प्लेटो
D.Plato
D.پلیٹو

Answer: A.ॲरिस्टॉटल
A.Aristotle
A.ارسٹوٹل

50 सूचना: वेगळे ते निवडा.

DIRECTIONS: Choose the odd one out.

سمت: بے جوڑ کو چنیں۔

A.सदरा
A.Shirt
A.شرٹ

B.जोडा
B.Shoe
B.جوتا

C.खुर्ची
C.Chair
C.کرسی

D.चांभार
D.Cobbler
D. موچی

Answer: D.चांभार
D.Cobbler
D. موچی

51 निर्देश: दिलेल्या अंक मालिकेतील चुकीची संज्ञा शोधा:

1.2, 1.25, 2.45, 3.7, 6.25, 9.85

DIRECTIONS: Find the wrong term in the given number series:

1.2, 1.25, 2.45, 3.7, 6.25, 9.85

ہدایت دے گئے نمبرس سرج مے غلط نمبر کھوجے

1.2, 1.25, 2.45, 3.7, 6.25, 9.85

A.9.85
A.9.85
A.9.85

B.6.25
B.6.25
B.6.25

C.1.2
C.1.2
C.1.2

D.2.45
D.2.45
D.2.45

Answer: B.6.25
B.6.25
B.6.25

52 **सूचना**: खालील प्रश्नात उत्तरातील पर्यायांपैकी कोणत्या पर्यायी आकृतीत प्रश्नातील आकृती अंतर्भूत आहे?

DIRECTIONS: In the given question find the answer figure in which question figure is embedded.

ہدایات: دیئے گئے سوال میں سے اس جواب والی تصویر کو تلاش کریں جس میں سوال کی تصویر منسلک ہے۔

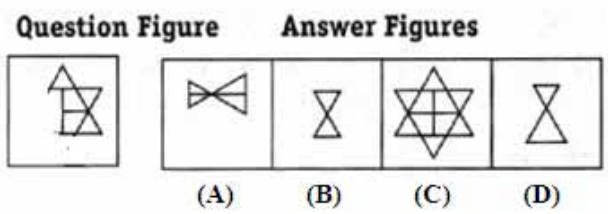

A. (A)

B. (B)

C. (C)

D. (D)

Answer: B. (B)

53 25-35 च्या दरम्यान आयक्यू गुण असलेल्या एखाद्या व्यक्तीस _____

An individual with IQ score between 25 – 35 has

ایک فرد جس کا آئی کیو اسکور 25 سے 35 کے درمیان ہو اسے لاحق ہے:

A.भाषण आणि अभिव्यक्तीमध्ये अडचणी आहेत
A.Difficulty in speech & expression
A.بولنے اور اظہار میں پریشانی

B.शैक्षणिक कौशल्ये नाहीत
B.No academic skills
B.کوئی تعلیمی لیاقت نہیں

C.कोणतेही मित्र किंवा रोजगार नाहीत
C.No friends or employment
C.کوئی دوست یا ملازمت نہیں

D.हे सर्व
D.All of these
D.مذکورہ تمام

Answer: D.हे सर्व
D.All of these
D.مذکورہ تمام

54 UAE ची राजधानी कोणती आहे?

What is the capital of UAE?

متحدہ عرب امارت کی راجدھانی ہے۔

A.तेहरान
A.Tehran
A.تہران

B.दुबई
B.Dubai
B.دبئی

C.रियाध
C.Riyadh
C.ریاض

D.अबू धाबी
D.Abu Dhabi
D.ابو دھابی

Answer: D.अबू धाबी
D.Abu Dhabi
D.ابو دھابی

55 अनेक संज्ञानात्मक अक्षमता असलेली व्यक्ती एखाद्या वेगळ्या कौशल्यामध्ये विलक्षण प्रवीण असल्यास त्यास असे ओळखले जाते

When an individual with multiple cognitive disabilities had extraordinary proficiency in one isolated skill this Known as

جب کسی شخص میں کثیر ادراکی معذوری آجائے حالانکہ ان الگ الگ غیر معمولی مہارت موجود تھی تو اسے کس نام سے جانا جاتا ہے

A.साव्हंट सिंड्रोम
A.Savant Syndrome
A.سیونٹ سنڈروم

B.एस्पर्जर अक्षमता (डीसेबिलीटी)
B.Asperger disability
B.چھڑکنے کی معذوری

C.आर सिंड्रोम
C.R syndrome
C.آر سنڈروم

D.बौद्धिक विलगीकरण
D.Intellectual isolation
D.صلاحیت کا فقدان

Answer: A.साव्हंट सिंड्रोम
A.Savant Syndrome
A.سیونٹ سنڈروم

56 सूचना: खाली दिलेली माहिती काळजीपूर्वक वाचा आणि दिलेल्या प्रश्नांची उत्तरे द्या.
आराधना, बंधन, चांदनी, दामिनी, एहसास आणि फरेब ही सहा नाटके सोमवार ते शनिवार दर दिवशी दाखवली जाणार आहेत.
(I) आराधना एहसासच्या एक दिवस आधी दाखवले गेले पाहिजे.
(II) चांदनी मंगळवारी दाखवले गेले पाहिजे
(III) बंधन फरेब दाखवला जाण्याच्या दुस-या दिवशी दाखवले जायला हवे.
(IV) दामिनी शुक्रवारीच दाखवला गेले पाहिजे आणि बंधन त्याच्या लगेच आधी येता कामा नये.
(V) एहसासला वेळापत्रकाच्या अखेरच्या दिवशी दाखवले गेले पाहिजे.
चांदनी नाटक आठवड्याच्या कोणत्या दिवशी दाखवले जाईल?

DIRECTIONS: Read the following information carefully and answer the given questions.
Six plays Aradhna, Bandhan, Chandni, Damini, Ehsaas and Fareb are to be staged, one on each day from Monday to Saturday.
(I) Aradhna must be staged a day before Ehsaas.
(II) Chandni must not be staged on Tuesday.
(III) Bandhan must be staged on the day following the day on which Fareb is staged.
(IV) Damini must be staged on Friday only and should not be immediately preceded by Bandhan.
(V) Ehsaas must not be staged on the last day of the schedule.
Play Chandni will be staged on which day of the week?

ہدایات: مندرجہ ذیل معلومات کو دھیان سے پڑھیں اور دیے گئے سوالوں کے جواب دیں۔
چھ ڈرامے آرادھنا، بندھن، چاندنی، دامنی، احساس اور فریب میں سے ہر ایک کو پیر سے سنیچر تک ہر دن اسٹیج کیا جانا ہے۔
(I) آرادھنا کو احساس سے ایک دن پہلے اسٹیج کیا جانا چاہیے۔
(II) چاندنی کو منگل کے دن اسٹیج نہیں کیا جانا چاہیے۔
(III) بندھن کو لازمی طور پر فریب اسٹیج کیے جانے والے دن کے اگلے دن اسٹیج کیا جانا چاہیے۔
(IV) دامنی لازمی طور پر صرف جمعہ کو اسٹیج کیا جانا چاہیے اور بندھن سے فوری پہلے نہیں ہونا چاہیے۔
(V) احساس کو شیڈول کے آخری دن اسٹیج نہیں کیا جانا چاہیے۔
ڈرامہ چاندنی ہفتہ کے کس دن اسٹیج کیا جائے گا؟

A.सोमवार
A.Monday
A.پیر

B.बुधवार
B.Wednesday
B.بدھ

C.शुक्रवार
C.Friday
C.جمعہ

D.शनिवार
D.Saturday
D.سنیچر

Answer: D.शनिवार
D.Saturday
D.سنیچر

57	खालीलपैकी कोणते सर्वोच्च न्यायालयाबद्दल सत्य नाही? Which of following is not true about Supreme Court? مندرجہ ذیل میں سے کون سی بات سپریم کورٹ کے بارے میں سچ نہیں ہے؟
	A.भारताचे सर्वोच्च संघन्यायालय A.Highest federal Court of India A.بھارت کی سب سے زیادہ وفاقی عدالت
	B.ते संविधान सुधारणा करू शकते B.Can amend constitution B.آئین میں ترمیم کر سکتی ہے
	C.त्याच्याकडे अपील अधिकार कार्यक्षेत्र आहे C.Has appellate Jurisdiction C.دائرہ اختیار اپیلیٹ ہے
	D.त्याच्याकडे मूळ अधिकार कार्यक्षेत्र आहे D.Has original Jurisdiction D.دائرہ اختیاراصل ہے
Answer:	B.ते संविधान सुधारणा करू शकते B.Can amend constitution B.آئین میں ترمیم کر سکتی ہے

58 सूचना: अर्थपूर्ण परिच्छेद निर्माण करण्यासाठी, खाली दिलेली (P), (Q) (R), (S) आणि (T) ही पाच वाक्ये योग्य अनुक्रमाने पुनर्रचना करा; त्यांनतर खालील प्रश्नांची उत्तर द्या.

P. माकडाने केकचे दोन तुकडे केले पण मान हलवून सांगितले कि ते समान नाहीत.
Q. मेजवानीनंतर डॉ मांजरांना एक केकचा तुकडा दिसतो आणि त्याच्यासाठी भांडण लागते.
R. तसे तो सतत करत राहिल्याने केक संपून गेला आणि दोन्ही मांजरं निराश झाली.
S. माकडाने ही लाभ मिळविण्याची संधी समजून त्यांना मदत देऊ केली.
T. त्याने एका तुकड्याचा एक घास खाल्ला आणि दुसऱ्या तुकड्याचा, तरीही ते दोन्ही समान झाले नाहीत.

पुनर्रचना केल्यानंतर खालीलपैकी कोणते वाक्य पहिले असेल?

DIRECTION: Rearrange the following five sentences (P), (Q), (R), (S) and (T) in the proper sequence to form a meaningful paragraph; then answer the questions given below them.
P. The monkey divides the cake into two parts but shakes its head saying they are unequal.
Q. After a feast, two cats see a piece of cake and start fighting for it.
R. He continues doing so until there is no more cake left, leaving the poor little cats disappointed.
S. A monkey sees this as an opportunity for gain and offers to help them.
T. He takes a bite of one piece and then the other, but still finds them unequal.

Which of the following should be the FIRST sentence after rearrangement?

ہدایات: ان پانچ جملوں (P)، (Q)، (R)، (S) اور (T) کو با معنی پیرا بنانے کے لئے دوبارہ ترتیب دیجئے، پھر نیچے دے گئے سوالوں کے جواب دیجئے

P. بندر نے کیک کو دو حصّوں میں تکسیم کیا لیکن یے کہکر اپنا سر ہلایا کہ دونو برابر نہی ہے.
Q. دعوت کے بعد، دو بلليوں نے کیک کہ ٹکڑا دیکھا اور اسکے لئے لڑنا شرو کیا.
R. وو یہ لگاتار کرنے لگا جب تک کچھ کیک نہی بچا،اور بیچاری چھوٹی بلليوں کو مایوس کیا.
S. ایک بندر کو یہ فائدہ اٹھانے کہ موکا لگا اور مدد کی پیشکش کی.
T. اسنے ایک کو دانت سے کاٹا اور پھر دوسرے کو، لیکن پھر بھی چھوٹا بڑا پایا.

دوبارہ ترییب دینے کے بعد کون سا جملہ پہلے ہونا چاہیے؟

A.Q
A.Q
A.Q

B.P
B.P
B.P

C.S
C.S
C.S

D.T
D.T
D.T

Answer: A.Q
A.Q
A.Q

59 सूचना: दिलेल्या पर्यायांमधून श्रेणी पूर्ण करणारी योग्य आकृती निवडा.

DIRECTIONS: Complete the series by choosing right figure from the given choices.

ہدایات: دیئے گئے انتخابات میں سے صحیح تصویر کو منتخب کرکے سلسلہ مکمل کریں۔

Problem Figures

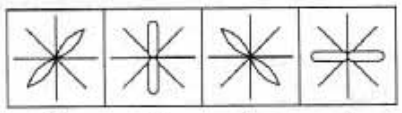

1 2 3 4

Answer Figures

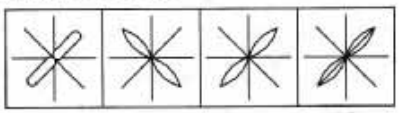

(A) (B) (C) (D)

A. (A)

B. (B)

C. (C)

D. (D)

Answer: C. (C)

60 x च्या M% हे y आहे आणि y च्या N% हे x आहे, तर:

If M% of x is y and N% of y is x, then:

اگر x کا M% ہو اور Y کا N% x ہے، تو:

A.M + N = 100
A.M + N = 100
A.M + N = 100

B.MN = 10000
B.MN = 10000
B.MN = 10000

C.M/N = 100
C.M/N = 100
C.M/N = 100

D.N/M =100
D.N/M =100
D.N/M =100

Answer: B.MN = 10000
B.MN = 10000
B.MN = 10000

61 आपल्या विद्यार्थ्यांमधील सामाजिक गुणांची वाढ करण्याकरिता आपण काय कराल?

What will you do to propagate social qualities among your students?

اپنے طلبا کے درمیان سماجی خصوصیات کو فروغ دینے کے لئے آپ کس کا پروپیگنڈا کریں گے؟

A.आपल्याकडून विचित्र वर्तवणूक दाखवून
A.By showing your inconsistent behavior
A.اس کو اپناغیر مستقل رویہدکھا کر

B.त्यांच्यातील कमी असलेल्या सामाजिक गुणांवर मस्करीकरून
B.By mocking their poor social qualities
B.ان کے کمزور سماجی خصوصیات کا مذاق اڑاتے ہوئے

C.त्यांना सामाजिक मुल्यांअभावी येणाऱ्या संकटाबद्दल माहिती देऊन
C.Giving them knowledge about crisis of social values
C.سماجی اقدار کے بحران کے بارے میں انہیں معلومات دینا

D.) त्यांना सामाजिक संवादातून शिकण्यासाठी स्वातंत्र्य देऊन, तसेच त्यांना योग्य ते उदाहरणे पण देऊ.
D.Giving them freedom to learn through social interactions, also providing them with suitable examples.
D.انہیں سماجی بات چیت کے ذریعہ سیکھنے کی آزادی دینا، انہیں مناسب مثالیں بھی فراہم کرنا.

Answer: D.) त्यांना सामाजिक संवादातून शिकण्यासाठी स्वातंत्र्य देऊन, तसेच त्यांना योग्य ते उदाहरणे पण देऊ.
D.Giving them freedom to learn through social interactions, also providing them with suitable examples.
D.انہیں سماجی بات چیت کے ذریعہ سیکھنے کی آزادی دینا، انہیں مناسب مثالیں بھی فراہم کرنا.

62 सुंदरबन हे _____ आणी भारताद्वारे सामाईक केले जाते?

The Sunderbans is shared by India?

بھارت کے ساتھ سندربن کو ساجھا کیا ہے۔

A.म्यानमार
A.Myanmar
A.میانمار نے

B.भूतान
B.Bhutan
B.بھوٹان نے

C.बांग्लादेश
C.Bangladesh
C.بنگلہ دیش نے

D.चीन
D.China
D.چائنا نے

Answer: C.बांग्लादेश
C.Bangladesh
C.بنگلہ دیش نے

63 जेव्हा आपल्याला खालच्या स्तरावरील कर्मचाऱ्याकडून कार्यक्रमात आमंत्रण आल्यास, तेव्हा आपला निर्णय काय असेल?

When you are being invited by the lower level of the personnel in a function, then what will you decide?

جب آپ کو کم درجہ کے اہلکارکسی فنکشن میں مدعو کرتےہیں، تو آپ کیا فیصلہ کریں گے؟

A.आपण गोळा होणाऱ्या पैश्यात योगदान देणार पण कार्यक्रमात हजर राहणे अनिवार्य नाही असा विचार करणार
A.You will contribute money collectively but does not feel compulsory to attend the function
A.آپ مجموعی طور پر پیسہ دیتے ہیں لیکن تقریب میں حاضر ہونے کو لازم محسوس نہیں کریں گے

B.आपल्या सामाजिक प्रतिष्ठेमुळे आपण त्या कर्मचार्याच्या घरी जाने पसंद करणार नाही
B.You will not like to go to the home of that personnel due to social prestige
B.سماجی وقار کی وجہ سے آپ ان اہلکاروں کے گھر جانا نہیں چاہیں گے

C.तुम्हाला तिथे जायला आवडणार नाही किंवा त्यात सामील होणेही आवडणार नाही
C.Neither you will like to go nor you will like to join it
C.نہ ہی آپ جانا چاہتے ہیں اور نہ ہی آپ اس میں شامل ہونا چاہتے ہیں

D.आपण निश्चितपणे या कार्यक्रमास उपस्थित राहू.
D.You will definitely attend the function.
D.آپ ضرور تقریب میں شرکت کریں گے.

Answer: D.आपण निश्चितपणे या कार्यक्रमास उपस्थित राहू.
D.You will definitely attend the function.
D.آپ ضرور تقریب میں شرکت کریں گے.

64 निर्देश: खालील व्यवस्था काळजीपूर्वक वाचा आणि खाली दिलेल्या प्रश्नांची उत्तरे द्या.

P J % 5 D $ L O 3 # A Q 4 @ U F T * Z 8 K 2 M & H

वरची व्यवस्था बघता खालील मालिके मध्ये प्रश्न चिन्हाच्या जागी (?) दिलेल्या पर्याया पैकी काय यायला पाहिजे?

JP5 $DO #3Q @4F ?

DIRECTIONS: Study the following arrangement carefully and answer the questions given below.

P J % 5 D $ L O 3 # A Q 4 @ U F T * Z 8 K 2 M & H

What should come in the place of question-mark (?) in the following series on the basis of above arrangement?

JP5 $DO #3Q @4F ?

ہدایت نیچے دی گی ترتیب کو پڑھئے اور سہی جواب دیجئے

P J % 5 D $ L O 3 # A Q 4 @ U F T * Z 8 K 2 M & H

اپری ترتیب کا جایجا لیا جائے تو نیچے کی ترتیب مے سوالیہ نشان کے جگہ کیا ایگا ؟

JP5 $DO #3Q @4F ?

A.Z*8
A.Z*8
A.Z*8

B.T*8
B.T*8
B.T*8

C.Z*K
C.Z*K
C.Z*K

D.*T8
D.*T8
D.*T8

Answer: D.*T8
D.*T8
D.*T8

65 Out of the given four words only one is not spelt correctly. Find the word that is not correctly spelt.

A.Neumonia

B.Perseverance

C.Paralysis

D.Perspiration

Answer: A.Neumonia

66 सूचना: प्रत्येक प्रश्नाला एक प्रमुख विधानासोबत चार विधाने आहेत ज्यांच्याखाली A, B, C आणि D असे चार विधान आहेत. क्रमवार विधानांची जोडी निवडा ज्यामध्ये प्रथम विधान दुसऱ्या विधानाला सुचवते, आणि दोन्ही विधाने तर्किकदृष्ट्या प्रमुख विधानासोबत निगडित असेल.

जर तुम्ही सामन्यात शतक केले, तर तुम्हाला पुरस्कार दिला जाईल.
A. तुम्ही सामन्यात शतक केले
B. तुम्ही सामन्यात शतक केले नाही
C. तुम्हाला पुरस्कार दिला गेला
D. तुम्हाला पुरस्कार मिळाला नाही

DIRECTIONS: Each question has a main statement followed by four statements labelled A, B, C and D. Choose the ordered pair of statements, where the first statement implies the second, and the two statements are logically consistent with the main statement.

If you score century in the match , you will be awarded
A. you scored century in the match
B. you did not score century in the match
C. you were awarded
D. you were not awarded

اگر آپ میچ میں سنچری بنائیں تو آپ کو انعام ملے گا
Aآپ نے میچ میں سنچری بنائی ۔
Bآپ نے میچ میں سنچری نہیں بنائی ۔
Cآپ کو انعام ملا ۔
Dآپ کو انعام نہیں ملا ۔

A.AC
A.AC
A.AC

B.BC
B.BC
B.BC

C.DA
C.DA
C.DA

D.CD
D.CD
D.CD

Answer: A.AC
A.AC
A.AC

67 निर्देश:खालील प्रश्न दिलेल्या शब्दांवर आधारित आहेत.

light/ ride/ when/ price

प्रत्येक शब्दासमोर 'P' ठेवल्यास किती अर्थपूर्ण शब्द तयार होतील?

DIRECTIONS: Each of the following questions is based on the following given words.

light/ ride/ when/ price

If ‘P’ is placed before every word then how many meaningful words will be formed?

ہدایت جیل کے سوال دے ہے لفجونپر مشتمل ہیں

light/ ride/ when/ price

لگایا جائے تو کتنے مکمل الفاظ تیار ہونگے 'P' حرف-

A.एक
A.One
A.ایک

B.दोन
B.Two
B.دو

C.तीन
C.Three
C.تین

D.चार
D.Four
D.چار

Answer: B.दोन
B.Two
B.دو

68 **सूचना:** खालील प्रश्नात, दिलेल्या पर्यायांमधून नातेसंबंध सांगणारी आकृती निवडा.

DIRECTIONS: In the question below, select the related figure from the given alternatives.

ہدایات: ذیل کے سوال میں، دئے گئے متبادلات میں سے متعلقہ تصویر منتخب کریں۔

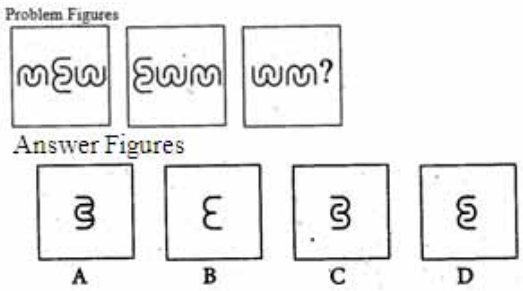

A. (A)

B. (B)

C. (C)

D. (D)

Answer: D. (D)

69 216% हे अशा तऱ्हेने मांडले जाऊ शकते.

216% can be expressed as.

216% کو ظاہر کر سکتے ہیں۔

A.2160
A.2160
A.2160

B.21.6
B.21.6
B.21.6

C.216
C.216
C.216

D.2.16
D.2.16
D.2.16

Answer: D.2.16
D.2.16
D.2.16

70 माणिक उत्तरेला 40 मीटर चालत गेला, डावीकडे वळला आणि 20 मीटर चालला. तो पुन्हा डावीकडे वळला आणि 40 मीटर चालत गेला. तर तो सुरुवातीच्या ठिकाणापासून किती दूर आणि कुठल्या दिशेला आहे?

Manik walked 40 meters towards North, took a left turn and walked 20 meters. He again took a left turn and walked 40 meters. How far and in which direction is he from the starting point?

مانک شمال کی طرف 40 میٹر چلا، بائیں مڑا اور 20 میٹر چلا۔ وہ پھر بائیں مڑا اور 40 میٹر چلا۔ شروعاتی نقطہ سے وہ کتنی دور اور کس سمت میں ہے؟

A.पूर्वेला 20 मीटरवर.
A.20 meters east
A.20 میٹر مشرق۔

B.उत्तरेला 20 मीटरवर.
B.20 meters north
B.20 میٹر شمال۔

C.दक्षिणेला 20 मीटरवर.
C.20 meters south
C.20 میٹر جنوب۔

D.पश्चिमेला 20 मीटरवर.
D.20 meters west
D.20 میٹر مغرب۔

Answer: D.पश्चिमेला 20 मीटरवर.
D.20 meters west
D.20 میٹر مغرب۔

71 सरासरी बुद्धिमत्ता बुद्ध्यांक श्रेणी पर्यंत असते

Average intelligence 1Q range goes upto

اوسط ذہانت کی آئی قیو اوسط کے اوپر جاتی ہے

A.85-115
A.85-115
A.85-115

B.20-40
B.20-40
B.20-24

C.ज्ञात नाही
C.not known
C. غیر معلوم

D.150-250
D.150-250
D.150-250

Answer: A.85-115
A.85-115
A.85-115

72 सूचना: खालील प्रश्नांमध्ये दिलेल्या पर्यायांमधून संबंधित अक्षर/शब्द/संख्या निवडा.
5 : 26 : ?

DIRECTIONS: In the following question, select the related letter/word/number from the given alternatives.

5 : 26 : ?

سمت: مندرجہ ذیل سوال میں، دیے گئے متبادل سے متعلقہ حرف/لفظ/نمبر منتخب کریں۔

5 : 26 : ?

A.0.3263888888888889
A.0.3263888888888889
A.0.3263888888888889

B.0.27430555555555552
B.0.27430555555555552
B.0.27430555555555552

C.9 : 100
C.9 : 100
C.9 : 100

D.यांपैकी कोणतीही नाही
D.None of these
D.ان میں سے کوئی نہیں

Answer: A.0.3263888888888889
A.0.3263888888888889
A.0.3263888888888889

73

सूचना: दिलेल्या पर्यायांमधून श्रेणी पूर्ण करणारी योग्य आकृती निवडा.

DIRECTIONS: Complete the series by choosing right figure from the given choices.

ہدایات: دیئے گئے انتخابات میں سے صحیح تصویر کو منتخب کرکے سلسلہ مکمل کریں۔

Problem Figures

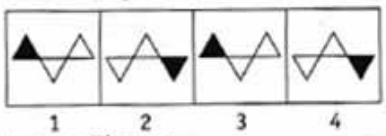

1 2 3 4

Answer Figures

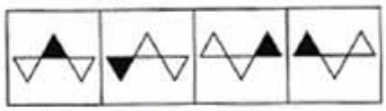

(A) (B) (C) (D)

A. (A)

B. (B)

C. (C)

D. (D)

Answer: D. (D)

74

सूचना: खालील प्रश्नात उत्तरातील पर्यायांपैकी कोणत्या पर्यायी आकृतीत प्रश्नातील आकृती अंतर्भूत आहे?

DIRECTIONS: In the given question find the answer figure in which question figure is embedded.

ہدایات: دیئے گئے سوال میں سے اس جواب والی تصویر کو تلاش کریں جس میں سوال کی تصویر منسلک ہے۔

प्रश्न आकृती

Question Figure

سوال کی تصویر

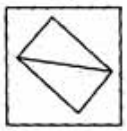

(x)

उत्तरासाठी पर्यायी आकृत्या

Answer Figures

جواب کی تصاویر

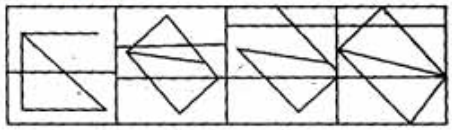

A B C D

A. (A)

B. (B)

C. (C)

D. (D)

Answer: D. (D)

75

सूचना: खालील प्रश्नात, दिलेल्या पर्यायांमधून नातेसंबंध सांगणारी आकृती निवडा.

DIRECTIONS: In the question below, select the related figure from the given alternatives.

ہدایات: ذیل کے سوال میں، دئے گئے متبادلات میں سے متعلقہ تصویر منتخب کریں۔

Problem Figures

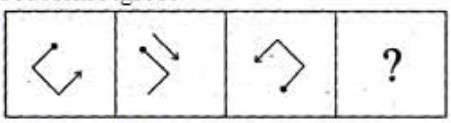

Answer Figure

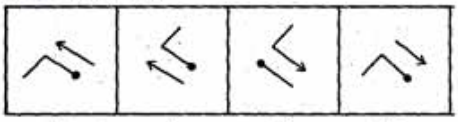

A B C D

A. (A)

B. (B)

C. (C)

	D. (D)
Answer:	B. (B)

76	‘ हातावर तुरी देणे ‘ या वाक्प्रचाराचा अर्थ काय ?
	A.फसवून पळून जाणे
	B.वचन देणे
	C.भातुकली खेळणे
	D.प्रसाद देणे
Answer:	A.फसवून पळून जाणे

77	कोणत्या संघाने ISL3 जिंकला होता? Which team had won the ISL3? کونسی ٹیم نے (آئی ایس ایل۳) جیتا۔
	A.एफसी मुंबई A.FC Mumbai A.ایف سی ممبئی نے
	B.चेन्नईइन एफसी B.Chennaiyin FC B.چنئی ایف سی نے
	C.केरळ ब्लास्टर्स C.Kerala Blasters C.کیرالہ بلاسٹر نے
	D.अट्लेटीको दि कोलकत्ता D.Atletico de Kolkata D.اٹلیٹکو ڈی کولکاتا نے
Answer:	D.अट्लेटीको दि कोलकत्ता D.Atletico de Kolkata D.اٹلیٹکو ڈی کولکاتا نے

78	जेव्हा आपले मित्रभरघोस यशाची सीमा पार करतात आपल्याला कसे वाटते? How do you feel when your friends excel in their achievements? جب آپ کے دوستوں کو کامیابیاں ملتی ہے تو آپ کیسے محسوس کرتے ہیں؟
	A.जळतो A.Jealousy A.حسد
	B.दुबळी स्पर्धा व चढाओढ B.Unhealthy competition and rivalry B.غیر صحت بخش مقابلہ اور رقابت
	C.चुरशीची लढत C.Healthy competition C.صحت مند مقابلہ
	D.निराशा व गैर फायदा D.Frustration and maladjustment. D.مایوسی اور میل ایڈجسٹمنٹ.
Answer:	C.चुरशीची लढत C.Healthy competition C.صحت مند مقابلہ

79 निर्देश: खालील शब्दांची इंग्रजी शब्दकोशानुसार मांडणी करा.
(a) Heaven
(b) Hillock
(c) Hawker
(d) Hilt
(e) History

DIRECTIONS: Arrange the following words according to the English dictionary.
(a) Heaven
(b) Hillock
(c) Hawker
(d) Hilt
(e) History

ہدایت: انگریزی لغت کے مطابق مندرجہ ذیل الفاظ کو مرتب کریں۔

Heaven (a)
Hillock (b)
Hawker (c)
Hilt (d)
History(d)

A.(d), (c), (b), (a), (e)
A.(d), (c), (b), (a), (e)
A.(d), (c), (b), (a), (e)

B.(c), (a), (b), (d), (e)
B.(c), (a), (b), (d), (e)
B.(c), (a), (b), (d), (e)

C.(c), (e), (b), (a), (d)
C.(c), (e), (b), (a), (d)
C.(c), (e), (b), (a), (d)

D.(c), (e), (a), (b), (d)
D.(c), (e), (a), (b), (d)
D.(c), (e), (a), (b), (d)

Answer: B.(c), (a), (b), (d), (e)
B.(c), (a), (b), (d), (e)
B.(c), (a), (b), (d), (e)

80 A आणि B हे एक काम 30 दिवसांत, B आणि C तेच काम 40 दिवसांत आणि C आणि A तेच काम 60 दिवसांत पूर्ण करतात. सर्व एकत्र काम करत असताना त्या सर्वांना ते काम पूर्ण करण्यास किती दिवस लागतील?

A and B can finish a work in 30 days, B and C in 40 days while C and A in 60 days. How long will they take to finish it while working all together?

A اور B ایک کام کو 30 دن میں مکمل کرتے ہیں ۔ B اور C اس کام کو 40 دنوں میں جبکہ C اور A 60 دنوں میں۔ یہ سارے مل کر اس کام کو کتنے دنوں میں مکمل کریں گے؟

(A) $20\frac{2}{3}$ days/ दिवस / دن

(B) $26\frac{2}{3}$ days/ दिवस / دن

(C) $22\frac{1}{3}$ days/ दिवस / دن

(D) $25\frac{2}{3}$ days / दिवस / دن

Answer: (B) $26\frac{2}{3}$ days/ दिवस / دن

81 **सूचना**: दिलेल्या चारांपैकी वेगळी (असंबद्ध) असणारी आकृती शोधून काढा.

DIRECTIONS: Find the odd from the given four figures.

ہدایات: دی گئی 4 تصاویر میں سے متفرق تلاش کریں۔

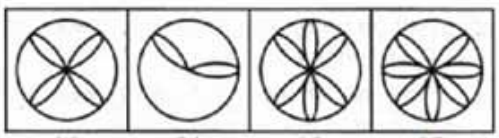

(A) (B) (C) (D)

A. (A)

B. (B)

C. (C)

D. (D)

Answer: D. (D)

82 आपण रेल्वे आरक्षनाणे भारतातील दूरच्या ठिकाणी प्रवास करत असता, जेव्हा एखादी महिला आत प्रवेश करून आपल्याला जागेसाठी विनंती करते, आपली प्रतिक्रिया काय असेल?

The previous generations did not have such an urgent demand of vocational guidance as the present generation has, the reason is that—

-گزشتہ نسلوں کو پیشہ ورانہ رہنمائی کی ایسی فوری ضرورت نہیں تھی، جیسی موجودہ نسل کو ہے،اس کی وجہ یہ ہے کہ

A.आपण स्पष्टपणे नकार देऊ कि आपण जागा वाटू शकत नाही
A.The present generation is facing very tough competition in vocations
A.موجودہ نسل کو پیشوں میں بہت سخت مقابلہ کا سامناہے

B.जर ती स्त्री सुंदर व तरुण असेल तर आपण दुसऱ्या अर्थाने विचार करू
B.The present vocational employment becomes highly compact and complex in nature
B.موجودہ پیشہ ورانہ ملازمت فطرت میں انتہائی کمپیکٹ اور پیچیدہ ہو جاتی ہے

C.आपण तिला तेव्हाच बसण्यास सांगणार
C.The old generation was not aware about vocational structure and their demands
C.پرانی پود کو پیشہ ورانہ ساخت اور ان کے مطالبات کے بارے میں علم نہیں تھا

D.आपण आपली सीट सोडणार आणि आपल्या स्वत:साठी पर्यायी व्यवस्था करणार
D.The old generation had no problem of vocational selection.
D.پرانی نسل کو پیشہ ورانہ انتخاب کا کوئی مسئلہ نہیں تھا.

Answer: A.आपण स्पष्टपणे नकार देऊ कि आपण जागा वाटू शकत नाही
A.The present generation is facing very tough competition in vocations
A.موجودہ نسل کو پیشوں میں بہت سخت مقابلہ کا سامناہے

83 दोन संख्यांचा गुणाकार 216 आहे. जर मसावी 6 असेल तर लसावी काढा?

The product of two number is 216. If the HCF is 6, then their LCM is?

دو نمبروں کی حاصل ضرب 216 ہے. اگر ایچ سی ایف 6 ہے، تو ان کے ایل سی ایم کیا ہے؟

A.72
A.72
A.72

B.60
B.60
B.60

C.48
C.48
C.48

D.36
D.36
D.36

Answer: D.36
D.36
D.36

84 भारतात जीवमंडलाचे राखीव एकूण साठे-

Total number of biosphere reserves in India are-

بھارت میں بایواسفیئر ذخائرکی کل تعداد ہے -

A.11
A.11
A.11

B.10
B.10
B.10

C.15
C.15
C.15

D.18
D.18
D.18

Answer: D.18
D.18
D.18

85 एक बरणी दूधाने भरली आहे. एक व्यक्ती बरणीमधून 33.33% दूध काढतो आणि त्याच्या जागी पाणी टाकतो. तो ही प्रक्रिया 4 वेळा पुनरावृत्त करतो आणि त्यामुळे बरणीमध्ये फक्त 96 मिली दूध राहते, बरणीचा उर्वरित भाग हा पाण्याने भरलेला होता. सुरूवातीला बरणीमध्ये असलेल्या दूधाचे प्रमाण__

A jar was full with Milk. A person used to draw out 33.33% of the Milk from the jar and replaced it with water. He has repeated the same process 4 times and thus there was only 96 ml of milk left in the jar, the rest part of the jar was filled with the water. The initial amount of milk in the jar was__

ایک مرتبان دودھ کے ساتھ بھرا ہوا تھا. ایک شخص جو جار سے 33.33% دودھ نکالتاہےاور اسکی جگہ پانی ڈال دیتا ہے۔ اس نے چار بار یہی کام کیا اور اس طرح جار میں صرف 96 ملی لیٹر دودھ باقی رہ گیا، جار کا باقی حصہ پانی سے بھرا ہوا ہے۔ جار میں دودھ کی ابتدائی مقدار کتنا ہے

A.750 मिली
A.750 ml
A.750 ملی لیٹر

B.576 मिली
B.576 ml
B.576 ملی لیٹر

C.812 मिली
C.812 ml
C.812 ملی لیٹر

D.486 मिली
D.486 ml
D.486 ملی لیٹر

Answer: D.486 मिली
D.486 ml
D.486 ملی لیٹر

86 एआइएसएसमध्ये _____यांना मोजतो.

AISS measures

اے ہے اس اس اقدامات

A.भावनिक क्षेत्र, शैक्षणिक क्षेत्र आणि सामाजिक क्षेत्र
A.Emotional area, Educational area & Social area
A.جذباتی علاقہ، تعلیمی علاقے اور سماجی علاقے

B.भावनिक क्षेत्र, शैक्षणिक क्षेत्र आणि शारीरिक क्षेत्र
B.Emotional area, Educational area & Physiological area
B. جذباتی علاقہ، تعلیمی علاقے اور جسمانی علاقے

For More Info And Videos About TAIT-Exam Syllabus And Other Exam Visit My Channel
TAIT च्या 30 प्रश्नपत्रिका PDF
BADSHAHimp Available Request 9765226781
WWW.YouTube.com/BADSHAHimp
Subscribe My Channel

C.सामाजिक, भावनिक आणि पर्यावरण
C.Social, Emotional & environment
C.سماجی، جذباتی اور ماحول

D.सर्व योग्य आहेत
D.All are correct
D.سب درست ہیں

Answer: A.भावनिक क्षेत्र, शैक्षणिक क्षेत्र आणि सामाजिक क्षेत्र
A.Emotional area, Educational area & Social area
A.جذباتی علاقہ، تعلیمی علاقے اور سماجی علاقے

87 अत्यानंद हे याचे लक्षण आहे

Euphoria is a symptom of

یوفوریا (جنونی بشاشت) علامت ہے:

A.खूळेपणा
A.Mania
A.مانیا) جنون)

B.अती सेवन
B.Binge eating
B. بلا کی خوراک

C.छिन्नमानस
C.Schizophreme
C.اسکیزو فورنیا) شقاق دماغی)

D.मनोजन्य क्षुधानाश
D.Anorexia Nervosa
D. انوریکزیا نرووسا

Answer: A.खूळेपणा
A.Mania
A.مانیا) جنون)

For More Info And Videos About TAIT-Exam Syllabus And Other Exam Visit My Channel
TAIT च्या 30 प्रश्नपत्रिका PDF
BADSHAHimp Available Request 9765226781
WWW.YouTube.com/BADSHAHimp
Subscribe My Channel

88 खालील शब्दांची चढत्या क्रमाने मांडणी करून खाली दिलेल्या प्रतिसादांमधून कोणता अर्थपूर्ण क्रम असेल?

1. लिहिणे
2. पेन
3. पेपर
4. पोस्ट
5. पत्र

Which one of the given responses would be a meaningful order of the following words in ascending order?

1. Writing
2. Pen
3. Paper
4. Post
5. Letter

چڑھتی ہوئی ترتیب میں دیےگیے جوابات میں سے کونسا ایک مندرجہ ذیل الفاظ کی معنی خیز ترتیب ہوگی؟

1. لکھنا
2. قلم
3. کاغذ
4. پوسٹ
5. خط

A.3, 2, 4, 5, 1
A.3, 2, 4, 5, 1
A.3, 2, 4, 5, 1

B.3, 2, 1, 5, 4
B.3, 2, 1, 5, 4
B.3, 2, 1, 5, 4

C.3, 2, 1, 4, 5
C.3, 2, 1, 4, 5
C.3, 2, 1, 4, 5

D.2, 3, 1, 4, 5
D.2, 3, 1, 4, 5
D.2, 3, 1, 4, 5

Answer: B.3, 2, 1, 5, 4
B.3, 2, 1, 5, 4
B.3, 2, 1, 5, 4

For More Info And Videos About TAIT-Exam Syllabus And Other Exam Visit My Channel
TAIT च्या 30 प्रश्नपत्रिका PDF
BADSHAHimp Available Request 9765226781
WWW.YouTube.com/BADSHAHimp
Subscribe My Channel

89	प्रश्नासाठी सूचना: खालील मालिका पूर्ण करा. AE, BF, CG, ____, EI, FJ DIRECTION: Complete the following series. AE, BF, CG, ____, EI, FJ سوال کے لیے ہدایت:مندرجہ ذیل سیریز کو مکمل کریں۔ AE, BF, CG, ____, EI, FJ
	A.TU A.TU A.TU
	B.LP B.LP B.LP
	C.DH C.DH C.DH
	D.PQ D.PQ D.PQ
Answer:	C.DH C.DH C.DH
90	बरेच लोक विश्वास ठेवत असलेल्या वास्तवाने स्पष्ट न होणारा खोटा विश्वास A false belief unexplained by reality share by a number of people غلط سوچ حقیقی سے واضح نہیں ہوتا جسے بہت سے لوگ شیئر کرتے ہیں
	A.भ्रामक कल्पना A.Illusion A.وہم
	B.भ्रम B.Delusion B.نظر کا دھوکہ

For More Info And Videos About TAIT-Exam Syllabus And Other Exam Visit My Channel
BADSHAHimp TAIT च्या 30 प्रश्नपत्रिका PDF Available Request 9765226781
WWW.YouTube.com/BADSHAHimp Subscribe My Channel

C.चित्तभ्रम
C.Delirium
C.غصہ

D.अंधविश्वास
D.Superstition
D.توہم پرستی

Answer: D.अंधविश्वास
D.Superstition
D.توہم پرستی

91 सूचना: अर्थपूर्ण परिच्छेद निर्माण करण्यासाठी, खाली दिलेली (P), (Q) (R), (S) आणि (T) ही पाच वाक्ये योग्य अनुक्रमाने पुनर्रचना करा; त्यांनतर खालील प्रश्नांची उत्तर द्या.

P. माकडाने केकचे दोन तुकडे केले पण मान हलवून सांगितले कि ते समान नाहीत.
Q. मेजवानीनंतर डॉ मांजरांना एक केकचा तुकडा दिसतो आणि त्याच्यासाठी भांडण लागते.
R. तसे तो सतत करत राहिल्याने केक संपून गेला आणि दोन्ही मांजरं निराश झाली.
S. माकडाने ही लाभ मिळविण्याची संधी समजून त्यांना मदत देऊ केली.
T. त्याने एका तुकड्याचा एक घास खाल्ला आणि दुसऱ्या तुकड्याचा, तरीही ते दोन्ही समान झाले नाहीत.

पुनर्रचना केल्यानंतर खालीलपैकी कोणते वाक्य तिसरे असेल?

DIRECTION: Rearrange the following five sentences (P), (Q), (R), (S) and (T) in the proper sequence to form a meaningful paragraph; then answer the questions given below them.
P. The monkey divides the cake into two parts but shakes its head saying they are unequal.
Q. After a feast, two cats see a piece of cake and start fighting for it.
R. He continues doing so until there is no more cake left, leaving the poor little cats disappointed.
S. A monkey sees this as an opportunity for gain and offers to help them.
T. He takes a bite of one piece and then the other, but still finds them unequal.

Which of the following should be the THIRD sentence after rearrangement?

ہدایات: ان پانچ جملوں (P)، (Q)، (R)، (S) اور (T) کو با معنی پیرا بنانے کے لئے دوبارہ ترتیب دیجئے، پھر نیچے دے گئے سوالوں کے جواب دیجئے

P. بندر نے کیک کو دو حصّوں میں تکسیم کیا لیکن بے کہکر اپنا سر ہلایا کہ دونو برابر نہی ہے.
Q. دعوت کے بعد، دو بلليوں نے کیک کہ ٹکڑا دیکھا اور اسکے لئے لڑنا شرو کیا.
R. وو یہ لگاتار کرنے لگا جب تک کچھ کیک نہی بچا،اور بیچاری چھوٹی بلليوں کو مایوس کیا.
S. ایک بندر کو یہ فائدہ اٹھانے کہ موکا لگا اور مدد کی پیشکش کی.
T. اسنے ایک کو دانت سے کاٹا اور پھر دوسرے کو، لیکن پھر بھی چھوٹا بڑا پایا.

دوبارہ ترییب دینے کے بعد کون سا جملہ تیسرا ہونا چاہیے؟

A.P
A.P
A.P

B.Q
B.Q
B.Q

C.R
C.R
C.R

D.S
D.S
D.S

Answer: A.P
A.P
A.P

92 $(64)^{3-x} = 4^{6x}$; x =?

$(64)^{3-x} = 4^{6x}$; x =?

$(64)^{3-x} = 4^{6x}$; x =?

A.1
A.1
A.1

B.2
B.2
B.2

C.3
C.3
C.3

D.4
D.4
D.4

Answer: A.1
A.1
A.1

For More Info And Videos About TAIT-Exam Syllabus And Other Exam Visit My Channel
TAIT च्या 30 प्रश्नपत्रिका PDF
BADSHAHimp Available Request 9765226781
WWW.YouTube.com/BADSHAHimp
Subscribe My Channel

93 जर आपल्या कामाच्या जागी आपले मित्रांपेक्षा जास्त वैरी असतील, आपण सपादून घेणार-

If you have more enemies instead of good friends at your workplace, your adjustment will be—

اگر آپ کے کام کے مقام پر اچھے دوستوں کی نسبت آپ کے دشمن زیادہ ہیں تو، آپ کی ایڈجسٹمنٹ یہ ہو گی

A.जास्त प्रमाणात
A.Of high order
A.اعلی حکم سے

B.कमी प्रमाणात
B.Of low level
B.کم سطح کی

C.सतर्कतेने
C.Of neutral type.
C.غیر جانبدار قسم کا.

D.दुर्लक्षतेने
D.Of neglected type
D.نظر اندازشدہ قسم کا

Answer: B.कमी प्रमाणात
B.Of low level
B.کم سطح کی

94 दिलेल्या पर्यायांपैकी वेगळे ते निवडा:

Select the odd one out from the given options:

دیے گئے اختیارات میں سے بے جوڑ کو منتخب کریں:

A.उन्हाळा
A.Summer
A.گرمی

B.हिवाळा
B.Winter
B.سردی

C.पावसाळी
C.Rainy
C.برسات

D.छान
D.Cool
D.ٹھنڈی

For More Info And Videos About TAIT-Exam Syllabus And Other Exam Visit My Channel
TAIT च्या 30 प्रश्नपत्रिका PDF
BADSHAHimp Available Request 9765226781
WWW.YouTube.com/BADSHAHimp
Subscribe My Channel

Answer: D.छान
D.Cool
D.ٹھنڈی

95 Out of the given options, choose the one which is the correct passive voice of the sentence given below.
I had not completed the assignment.

A.The assignment have not been completed by me.

B.The assignment were not being completed by me.

C.The assignment were not completed by me.

D.The assignment had not been completed by me.

Answer: D.The assignment had not been completed by me.

96 Choose the word which is most similar in meaning to the given word.
ZENITH

A.Peak

B.Bottom

C.Nadir

D.Base

Answer: A.Peak

97 $(4\times4)^3\div(512\div8)^4\times(32\times8)^4=(2\times2)^?+4$

$(4\times4)^3\div(512\div8)^4\times(32\times8)^4=(2\times2)^?+4$

$(4\times4)^3\div(512\div8)^4\times(32\times8)^4=(2\times2)^?+4$

A.8
A.8
A.8

B.12
B.12
B.12

C.6
C.6
C.6

D.14
D.14
D.14

Answer: C.6
C.6
C.6

98 समजा आपला एखादा सहकारी आपल्या शेजारी राहत आहे, परंतु आपली त्याचाशी खास ओळख नाही, हे कारण असू शकते

Suppose a colleague is living in your neighborhood, but you have no affinity with him, the reason of it may be,

فرض کریں کہ ایک ساتھی آپ کے پڑوسی میں رہ رہا ہے، لیکن آپ کے ساتھ کوئی تعلق نہیں ہے، اس کی وجہ ہوسکتی ہے،

A.त्याचे दू:खी स्वभाव आणि ग्रामीण पार्श्वभूमी
A.His miserable behavior and rural background
A.اس کا برا رویہ اور دیہی پس منظر

B. त्याची धार्मिक श्रद्धा
B.His religious faith
B.اس کی مذہبی عقیدت

C.त्याचे असमाजीकीकरण
C.His social rejection
C.اس کا سماجی ردعمل

D.त्याच्याबरोबरीचे कमकुवत सामाजिक संबंध
D.Your poor social relations with him
D.اس کے ساتھ آپ کے برے سماجی تعلقات

Answer: D.त्याच्याबरोबरीचे कमकुवत सामाजिक संबंध
D.Your poor social relations with him
D.اس کے ساتھ آپ کے برے سماجی تعلقات

99 चतुर्भुजाच्या कोनांची क्रमानुसार मापे घेण्यात आली ती 1:2:3:4 या गुणोत्तरात आहेतम, चतुर्भुज आहे:

The measures of the angles of a quadrilateral taken in order are proportional to 1:2:3:4, then the quadrilateral is:

ترتیب میں لے جانے والے کواڈیلیٹرل زاویہ کے پیمائش1:2:3:4کے تناسب میں ہیں، تو کواڈیلیٹرل ہے

A.समांतरभुज
A.parallelogram
A.متوازی الاضلاع

B.समलंब
B.Trapezium
B.مُنحَرِف

C.आयत
C.Rectangle
C.مستطیل

D.समचतुर्भुज
D.Rhombus
D.شکل معین

Answer: B.समलंब
B.Trapezium
B.مُنحَرِف

100 सूचनाः दिलेल्या पर्यायांमधून ऍनालॉगस शब्द निवडा.

गिटारचा संबंध हार्पसोबत आहे जसा ट्रंपेटचा संबंध ...सोबत आहे.

DIRECTIONS: Choose the analogous word from the given alternatives.

Guitar is to Harp as Trumpet is to _____.

ہدایات: دیے گئے متبادل سے مطابق لفظ کا انتخاب کریں

گٹار کا تعلق ہارپ کے ساتھ ویسا ہی ہے جیسا کہ ٹرمپیٹ کا -------- کے ساتھ .

A.गाँग
A.Gong
A. گونگ

B.ट्रॉम्बोन्स
B.Trombones
B. ٹرومبونس

C.सेलो
C.Cello
C. سیلو

D.बास
D.Bass
D. بیس

Answer: B.ट्रॉम्बोन्स
B.Trombones
B. ٹرومبونس

101 20 मुलांच्या रांगेत, D समोरून चौदाव्या क्रमांकावर असून F खालून नवव्या स्थानावर आहे. D आणि F मध्ये किती मुले आहेत ?

In a queue of 20 boys, D is fourteenth from the front and F is ninth from the bottom. How many boys are there between D and F?

20 لڑکوں کی کتار میں، D اور F آگے سے چودوا اور F نیچے سے نووی ہے. D اور F کے درمیان کتنے لڑکے ہے؟

A.2
A.2
A.2

B.3
B.3
B.3

C.4
C.4
C.4

D.None of these
D.ان میں سے کوئی نہیں

Answer: D.None of these
D.ان میں سے کوئی نہیں

102 सूचना: खालील प्रश्नांमध्ये दिलेल्या पर्यायांमधून संबंधित अक्षर/शब्द/संख्या निवडा.

पोट : अन्न :: इंजिन : ?

DIRECTIONS: In the following question, select the related letter/word/number from the given alternatives.

Stomach : Food :: Engine : ?

سمت: مندرجہ ذیل سوال میں، دیے گئے متبادل سے متعلقہ حرف/لفظ/نمبر منتخب کریں۔

پیٹ : کھانا :: انجن : ؟

A.इंधन
A.Fuel
A.ایندھن

B.विमान
B.Plane
B.رندہ

C.कार
C.Car
C.کار

D.यंत्र
D.Machine
D.مشین

Answer: A.इंधन
A.Fuel
A.ایندھن

103 सूचना: खाली दिलेली माहिती काळजीपूर्वक वाचा आणि दिलेल्या प्रश्नांची उत्तरे द्या.
आराधना, बंधन, चांदनी, दामिनी, एहसास आणि फरेब ही सहा नाटके सोमवार ते शनिवार दर दिवशी दाखवली जाणार आहेत.
(I) आराधना एहसासच्या एक दिवस आधी दाखवले गेले पाहिजे.
(II) चांदनी मंगळवारी दाखवले गेले पाहिजे
(III) बंधन फरेब दाखवला जाण्याच्या दुस-या दिवशी दाखवले जायला हवे.
(IV) दामिनी शुक्रवारीच दाखवला गेले पाहिजे आणि बंधन त्याच्या लगेच आधी येता कामा नये.
(V) एहसासला वेळापत्रकाच्या अखेरच्या दिवशी दाखवले गेले पाहिजे.
खालीलपैकी काय नाटकांचे वेळापत्रक आहे, जे सोमवारपासून त्यांचे प्रदर्शन करण्याच्या क्रमासोबत आहे?

DIRECTIONS: Read the following information carefully and answer the given questions.
Six plays Aradhna, Bandhan, Chandni, Damini, Ehsaas and Fareb are to be staged, one on each day from Monday to Saturday.
(I) Aradhna must be staged a day before Ehsaas.
(II) Chandni must not be staged on Tuesday.
(III) Bandhan must be staged on the day following the day on which Fareb is staged.
(IV) Damini must be staged on Friday only and should not be immediately preceded by Bandhan.
(V) Ehsaas must not be staged on the last day of the schedule.
Which of the following is the schedule of plays, with the order of their staging from Monday?

ہدایات: مندرجہ ذیل معلومات کو دھیان سے پڑھیں اور دیے گئے سوالوں کے جواب دیں۔
چھ ڈرامے آرادھنا، بندھن، چاندنی، دامنی، احساس اور فریب میں سے ہر ایک کو پیر سے سنیچر تک ہر دن اسٹیج کیا جانا ہے۔
(I) آرادھنا کو احساس سے ایک دن پہلے اسٹیج کیا جانا چاہیے۔
(II) چاندنی کو منگل کے دن اسٹیج نہیں کیا جانا چاہیے۔
(III) بندھن کو لازمی طور پر فریب اسٹیج کیے جانے والے دن کے اگلے دن اسٹیج کیا جانا چاہیے۔
(IV) دامنی لازمی طور پر صرف جمعہ کو اسٹیج کیا جانا چاہیے اور بندھن سے فوری پہلے نہیں ہونا چاہیے۔
(V) احساس کو شیڈول کے آخری دن اسٹیج نہیں کیا جانا چاہیے۔
پیر کے دن سے اسٹیج کرنے کی ترتیب کے ساتھ، مندرجہ ذیل میں سے ڈراموں کا شیڈول کون سا ہے؟

A.एहसास, अर्धना, बंधन, फारेब, दामिनी, चांदनी
A.Ehsaas, Aradhna, Bandhan, Fareb, Damini, Chandni
A.احساس، آرادھنا، بندھن، فریب، دامنی، چاندنی

B.अराधना, फारेब, दामिनी, चांदनी, आराधना, बंधन
B.Aradhna, Fareb, Damini, Chandni, Aradhna, Bandhan
B.آرادھنا، فریب، دامنی، چاندنی، آرادھنا، بندھن

C.अराधना, फारेब, बंधन, चांदनी, दामिनी, एहसास
C.Aradhna, Fareb, Bandhan, Chandni, Damini, Ehsaas
C.آرادھنا، فریب، بندھن، چاندنی، دامنی، احساس

D.यांपैकी कोणतीही नाही
D.None of these
D.ان میں سے کوئی نہیں

Answer: D.यांपैकी कोणतीही नाही
D.None of these
D.ان میں سے کوئی نہیں

104

निर्देश: खालील प्रश्नांमध्ये प्रश्न चिन्हाच्या (?) जागी कोणते अंदाजे मूल्य यायला हवे? (तुम्ही अचूक मूल्य काढण्याचे अपेक्षित नाही).

DIRECTIONS: What approximate value should come in place of the question mark (?) in the following questions? (You are not expected to calculate the exact value)

ہدایات: مندرجہ ذیل سوال میں سوال کا نشان (؟) کی جگہ پر کون سا تخمینہ ویلیو آئے گا -
(آپ کو صحیح ویلیو نکالنے کی ضرورت نہیں ہے)

$\sqrt{749} \times 56 \div 4 = ?$

A. 380

B. 420

C. 300

D. 358

Answer: A. 380

105

भ्रमीष्ट व्यक्ती म्हणजे:

A paranoid person is

ایک پیروکار شخص ہے

A.समाजापासून माघार आणि भावनाहीन असलेला
A.Emotionless & withdrawed from society
A.بے روزگار اور معاشرے سے نکال لیا

B.विचाराधीन चूकीचाभ्रम किंवा श्रवण विषयक भ्रम असलेला
B.Preoccupied with delusion or auditory hallucinations
B. غلطی یا آڈیشن کے ساتھ تعصب سے منسلک

C.बहुतेक लोक जसे भावना व्यक्त करतात त्यापेक्षा कमी भावना दर्शवणारा
C.Showing less feelings than most people do
C.زیادہ تر لوگوں سے زیادہ احساسات دکھاتا ہے

D.यापैकी एकही नाही
D.None of these
D.ان میں سے کوئی بھی نہیں

Answer: B.विचाराधीन चूकीचाभ्रम किंवा श्रवण विषयक भ्रम असलेला
B.Preoccupied with delusion or auditory hallucinations
B. غلطی یا آڈیشن کے ساتھ تعصب سے منسلک

106 ज्या हिरव्या वनस्पती स्वत:चा आहार तयार करतात त्या प्रक्रियेला_____ म्हणतात

The process by which green plants make their own food is known as _____

وہ عمل ہے جس کے ذریعے سبز پودوے خود اپنے لئے کھانا بناتے ہیں۔----------

A.ज्वलन
A.Oxidation
A. تکسیدی

B.श्वसनक्रिया
B.Respiration
B. تنفس

C.प्रकाशसंश्लेषण
C.Photosynthesis
C. فوٹو سنتھیسس

D.सहजीवन
D.Symbiosis
D. سمبایوسس

Answer: C.प्रकाशसंश्लेषण
C.Photosynthesis
C. فوٹو سنتھیسس

107 हिवाळ्यात खालीलपैकी कोणते परिधान केले जाते?

Which of the following is worn in winters?

مندرجہ ذیل میں سے سردیوں میں کیا پہنا جاتا ہے؟

A.रेनकोट
A.Raincoat
A. برساتی کوٹ

B.मफलर
B.Muffler
B. مفلر

C.रबरीजोडे
C.Gum Boots
C. گم جوتے

D.यापैकी एकही नाही
D.None of these
D.ان میں سے کوئی نہیں

Answer: B.मफलर
B.Muffler
B. مفلر

108 सूचना: वेगळे ते निवडा.

DIRECTIONS: Choose the odd one out.

سمت: بے جوڑ کو چنیں۔

A.(18, 45)
A.(18, 45)
A.(18, 45)

B.(23, 14)
B.(23, 14)
B.(23, 14)

C.(29, 82)
C.(29, 82)
C.(29, 82)

D.(36, 27)
D.(36, 27)
D.(36, 27)

Answer: C.(29, 82)
C.(29, 82)
C.(29, 82)

109 एका घनाला रंगवून किमान शक्य संख्येचे काप करून 64 लहान पण एकसारख्या तुकड्यांमध्ये कापले गेले आहे. घन कापण्यासाठी आवश्यक असलेल्या कापांची किमान संख्या काय आहे ?

A cube is painted and cut into 64 smaller but identical pieces by making the minimum possible number of cuts. What is the minimum number of cuts required to cut a cube?

ایک کیوب کو ایک جیسے 64 ٹکڑوں میں رنگ دے کر کاٹا گیا ہے۔ کم سے کم ممکن کٹ لگاتے ہوئے, کیوب کو کاٹنے کے لئے کم سے کم کتنے کاٹ کی ضرورت پڑے گی؟

A.9
A.9
A.9

B.8
B.8
B.8

C.6
C.6
C.6

D.10
D.10
D.10

Answer: A.9
A.9
A.9

110 मनोजने शनिवारी 7 मार्च, 2004 रोजी त्याचा वाढदिवस साजरा केला. त्याच वारी ते पुढचा वाढदिवस कधी साजरा करतील?

Manoj celebrated his birthday on Saturday, 7th March, 2004. When will he celebrate his next birthday on same day?

منوج نے اپنا یوم پیدائش سنیچر کے دن 7 مارچ 2004 کو منایا، وہ اپنا یوم پیدائش اسی دن کب منائے گا؟

A.2009
A.2009
A.2009

B.2010
B.2010
B.2010

C.2011
C.2011
C.2011

D.2012
D.2012
D.2012

Answer: B.2010
B.2010
B.2010

111 सूचना: प्रत्येक प्रश्नाला एक प्रमुख विधानासोबत चार विधाने आहेत ज्यांच्याखाली A, B, C आणि D असे चार विधान आहेत. क्रमवार विधानांची जोडी निवडा ज्यामध्ये प्रथम विधान दुसऱ्या विधानाला सुचवते, आणि दोन्ही विधाने तर्किकदृष्ट्या प्रमुख विधानासोबत निगडित असेल.

अन्न एकतर बेचव आहे किंवा स्वादिष्ट आहे.
A. अन्न बेचव आहे.
B. अन्न बेचव नाही.
C. अन्न स्वादिष्ट आहे.
D. अन्न स्वादिष्ट नाही.

DIRECTIONS: Each question has a main statement followed by four statements labelled A, B, C and D. Choose the ordered pair of statements, where the first statement implies the second, and the two statements are logically consistent with the main statement.

The food is either insipid or delicious
A. The food is Insipid
B. The food is not insipid
C. The food is delicious
D. The food is not delicious

کھانا یا بے مزہ ہے یا مزیدار
A۔ کھانا بے مزہ ہے
B۔ کھانا بے مزہ نہیں ہے
C۔ کھانا مزیدار ہے
D۔ کھانا مزیدار نہیں ہے

A.BD
A.BD
A.BD

B.DA
B.DA
B.DA

C.CB
C.CB
C.CB

D.AB
D.AB
D.AB

Answer: B.DA
B.DA
B.DA

112	सरळ रूप द्या: 786 – 324 =? Simplify: 786 – 324 =? آسان بنائیں: 786 – 324= ?
	A.500 A.500 A.500
	B.462 B.462 B.462
	C.460 C.460 C.460
	D.यांपैकी कोणतेही नाही D.None of these D.ان میں سے کوئی نہیں.
Answer:	B.462 B.462 B.462
113	28935 खालीलपैकी कोणासोबत विभाज्य आहे? 28935 is divisible by which of the following? 28935 مندرجہ ذیل میں کس سے قابل تقسیم ہے؟
	A.9 A.9 A.9
	B.7 आणि 9 B.7 and 9 B.7 اور 9
	C.11 C.11 C.11

D.15 आणि 7
D.15 and 7
D.15 اور 7

Answer: A.9
A.9
A.9

114 जेव्हा एखाद्या कामाकरिता आपण घराबाहेर निघता, आणि एखादी अपंग व्यक्ती आपल्या नजरेसमोर येते, मग आपण विचार करतो-

While you come-out of home for some purpose, and you are being crossed by a handicapped person, then you think—

جب آپ کسی مقصد کے لئے گھر سے باہر آتے ہیں، اور آپ ایک معذور شخص کے پاس سے گذرتے ہیں، تو آپ سوچتے ہیں-

A.अशुभतेचे प्रतिक
A.About bad omen
A.برے نصیب کے بارے میں

B.जसे कि सर्व मानव समान आहेत
B.That all human beings are equal
B.کہ سب انسان برابر ہے

C.द्वेषाने
C.With hatredness
C.نفرت سے

D.जसे कि ते अपूर्ण व ओबडधोबड आहेत
D.That they are incomplete and awkward.
D.کہ وہ نامکمل اور عجیب ہیں.

Answer: B.जसे कि सर्व मानव समान आहेत
B.That all human beings are equal
B.کہ سب انسان برابر ہے

115 $y^2–13y+42=0$ या वर्गसमीकरणाची मुळे आहेत:

The roots of the quadratic equation $y^2–13y+42=0$ are:

مربع مساوات کے روٹ $y^2–13y+42=0$ ہیں:

A.6, 7
A.6, 7
A.6, 7

B.-6, 7
B.-6, 7
B.-6, 7

C.-6, -7
C.-6, -7
C.-6, -7

D.4, 9
D.4, 9
D.4, 9

Answer: A.6, 7
A.6, 7
A.6, 7

116 DIRECTIONS: A sentence with an underlined word is given below. Find the Word which is most similar in meaning to the underlined word.
The fireman was publicly exalted for his heroism.

A.Glorified

B.Condemned

C.Abused

D.Beaten

Answer: A.Glorified

117 कन्ट्रोल, शिफ्ट आणि आल्ट किजला ..... म्हणतात.

Ctrl, Shift and Alt are called …….. keys.

Ctrl، Shift اور Alt-ے کیز کہا جاتا ہے -------- کو

A.मॉडिफायर
A.Modifier
A.مویڈیفائر

B.फंशन
B.Function
B.فنکشن

C.आल्फान्युमरीक
C.Alphanumeric
C.الفانومرک

D.एडजस्टमेंट
D.Adjustment
D.ایڈجسٹمینٹ

Answer: A.मॉडिफायर
A.Modifier
A.مویڈیفائر

118 एका विशिष्ट सांकेतिक भाषेमध्ये, जर FANTASTIC हा शब्द SMZEBDJUT असा कूटबध्द केला जात असेल, DIRECTION हा शब्द त्या भाषेत कसा कूटबध्द केला जाईल?

In a certain code language, if the word FANTASTIC is coded as SMZEBDJUT, then how is the word DIRECTION coded in that language?

ایک مخصوص ضابطے کی زبان میں، اگر لفظ FANTASTIC کو SMZEBDJUT لفظ اس زبان میں تو DIRECTION لکھا جاتاہے، کو کیسے لکھاجائیگا؟

A.EHQDDUJPO
A.EHQDDUJPO
A.EHQDDUJPO

B.DQHCDOPJU
B.DQHCDOPJU
B.DQHCDOPJU

C.DQHEUJPOD
C.DQHEUJPOD
C.DQHEUJPOD

D.DOPJUDQHE
D.DOPJUDQHE
D.DOPJUDQHE

Answer: B.DQHCDOPJU
B.DQHCDOPJU
B.DQHCDOPJU

119

सूचना: खालील प्रश्नात एक आकृतिबंध दाखविला आहे आणि तो कळीची आकृती म्हणून नोंदला आहे. कागदाच्या मागच्या बाजूने बघितल्यास मूळची कळीची आकृती अचूकपणे कशी दिसेल हे तुम्हाला ठरवायचे आहे.

DIRECTIONS: In the following question, a design is given, marked as key figure. You have to determine which e will be the exact view of the original key figure seen from the reverse side of the paper.

ہدایات: مندرجہ ذیل سوالات میں، اہم تصویر کے طور پر نمایاں کرکے ایک ڈیزائن دی گئی ہے- آپ کو اس بات کا تعین کرنا ہوگا کہ کاغذ کے دوسری طرف سے دیکھنے پر اصل اہم تصویر کی صحیح شکل کیا ہو گی-

मुख्य आकृती
Main Figure
اہم تصویر



उत्तरासाठी पर्यायी आकृत्या
Answer Figure
جواب کی تصویر

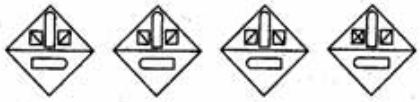

A B C D

A. (A)

B. (B)

C. (C)

D. (D)

Answer: C. (C)

120 सूचना: खाली दिलेली माहिती काळजीपूर्वक वाचा आणि दिलेल्या प्रश्नांची उत्तरे द्या.
आराधना, बंधन, चांदनी, दामिनी, एहसास आणि फरेब ही सहा नाटके सोमवार ते शनिवार दर दिवशी दाखवली जाणार आहेत.
(I) आराधना एहसासच्या एक दिवस आधी दाखवले गेले पाहिजे.
(II) चांदनी मंगळवारी दाखवले गेले पाहिजे
(III) बंधन फरेब दाखवला जाण्याच्या दुस-या दिवशी दाखवले जायला हवे.
(IV) दामिनी शुक्रवारीच दाखवला गेले पाहिजे आणि बंधन त्याच्या लगेच आधी येता कामा नये.
(V) एहसासला वेळापत्रकाच्या अखेरच्या दिवशी दाखवले गेले पाहिजे.
एहसासनंतर लगेच कोणती नाटके दाखवली जातील?

DIRECTIONS: Read the following information carefully and answer the given questions.
Six plays Aradhna, Bandhan, Chandni, Damini, Ehsaas and Fareb are to be staged, one on each day from Monday to Saturday.
(I) Aradhna must be staged a day before Ehsaas.
(II) Chandni must not be staged on Tuesday.
(III) Bandhan must be staged on the day following the day on which Fareb is staged.
(IV) Damini must be staged on Friday only and should not be immediately preceded by Bandhan.
(V) Ehsaas must not be staged on the last day of the schedule.
Which of the following plays is staged immediately after Ehsaas?

ہدایات: مندرجہ ذیل معلومات کو دھیان سے پڑھیں اور دیے گئے سوالوں کے جواب دیں۔
چھ ڈرامے آرادھنا، بندھن، چاندنی، دامنی، احساس اور فریب میں سے ہر ایک کو پیر سے سنیچر تک ہر دن اسٹیج کیا جانا ہے۔
(I) آرادھنا کو احساس سے ایک دن پہلے اسٹیج کیا جانا چاہیے۔
(II) چاندنی کو منگل کے دن اسٹیج نہیں کیا جانا چاہیے۔
(III) بندھن کو لازمی طور پر فریب اسٹیج کیے جانے والے دن کے اگلے دن اسٹیج کیا جانا چاہیے۔
(IV) دامنی لازمی طور پر صرف جمعہ کو اسٹیج کیا جانا چاہیے اور بندھن سے فوری پہلے نہیں ہونا چاہیے۔
(V) احساس کو شیڈول کے آخری دن اسٹیج نہیں کیا جانا چاہیے۔
احساس کے فوراً بعد مندرجہ ذیل میں سے کون سا ڈرامہ اسٹیج کیا گیا؟

A.बंधन
A.Bandhan
A.بندھن

B.दामिनी
B.Damini
B.دامنی

C.अराधना
C.Aradhna
C.آرادھنا

D.फारेब
D.Fareb
D.فریب

Answer: B.दामिनी
B.Damini
B.دامنی

121 सूचना: अर्थपूर्ण परिच्छेद निर्माण करण्यासाठी, खाली दिलेली (P), (Q) (R), (S) आणि (T) ही पाच वाक्ये योग्य अनुक्रमाने पुनर्रचना करा; त्यांनतर खालील प्रश्नांची उत्तर द्या.

P. माकडाने केकचे दोन तुकडे केले पण मान हलवून सांगितले कि ते समान नाहीत.
Q. मेजवानीनंतर डॉ मांजरांना एक केकचा तुकडा दिसतो आणि त्याच्यासाठी भांडण लागते.
R. तसे तो सतत करत राहिल्याने केक संपून गेला आणि दोन्ही मांजरं निराश झाली.
S. माकडाने ही लाभ मिळविण्याची संधी समजून त्यांना मदत देऊ केली.
T. त्याने एका तुकड्याचा एक घास खाल्ला आणि दुसऱ्या तुकड्याचा, तरीही ते दोन्ही समान झाले नाहीत.

पुनर्रचना केल्यानंतर खालीलपैकी कोणते वाक्य दुसरे असेल?

DIRECTION: Rearrange the following five sentences (P), (Q), (R), (S) and (T) in the proper sequence to form a meaningful paragraph; then answer the questions given below them.
P. The monkey divides the cake into two parts but shakes its head saying they are unequal.
Q. After a feast, two cats see a piece of cake and start fighting for it.
R. He continues doing so until there is no more cake left, leaving the poor little cats disappointed.
S. A monkey sees this as an opportunity for gain and offers to help them.
T. He takes a bite of one piece and then the other, but still finds them unequal.

Which of the following should be the SECOND sentence after rearrangement?

ہدایات: ان پانچ جملوں (P)، (Q)، (R)، (S) اور (T) کو با معنی پیرا بنانے کے لئے دوبارہ ترتیب دیجئے، پھر نیچے دے گئے سوالوں کے جواب دیجئے

P. بندر نے کیک کو دو حصّوں میں تکسیم کیا لیکن یے کہکر اپنا سر ہلایا کہ دونو برابر نہی ہے.
Q. دعوت کے بعد، دو بلليوں نے کیک کہ ٹکڑا دیکھا اور اسکے لئے لڑنا شرو کیا.
R. وو یہ لگاتار کرنے لگا جب تک کچھ کیک نہی بچا،اور بیچاری چھوٹی بلليوں کو مایوس کیا.
S. ایک بندر کو یہ فائدہ اٹھانے کہ موکا لگا اور مدد کی پیشکش کی.
T. اسنے ایک کو دانت سے کاٹا اور پھر دوسرے کو، لیکن پھر بھی چھوٹا بڑا پایا.

دوبارہ ترییب دینے کے بعد کون سا جملہ دوسرا ہونا چاہیے؟

A.S
A.S
A.S

B.P
B.P
B.P

C.Q
C.Q
C.Q

D.R
D.R
D.R

Answer: A.S
A.S
A.S

122 खालीलपैकी कोणता जीवनसत्व म्हणजे पाणी द्रावणीय आहे?

Which of the following vitamin is water soluble?

مندرجہ ذیل میں سے کونسا وٹامن پانی میں گھل جاتا ہے؟

A.सी जीवनसत्व
A.Vitamin C
A.وٹامن سی

B.ए जीवनसत्व
B.Vitamin A
B.وٹامن اے

C.डी जीवनसत्व
C.Vitamin D
C.وٹامن ڈی

D.क जीवनसत्व
D.Vitamin K
D.وٹامن کے

Answer: A.सी जीवनसत्व
A.Vitamin C
A.وٹامن سی

123 खालील पैकी कोणता अधातू 40˚C मध्ये द्रव आहे?

Which of the following non-metals is a liquid at 40 ˚C?

مندرجہ ذیل میں سے کونسا غیر دھات 40 ڈگری سیلسیس پر سیال بن جاتا ہے؟

A.पारा
A.Mercury
A.مرکری

B.गॅलियम
B.Gallium
B.گیلیم

C.ब्रोमिन
C.Bromine
C.برومائن

D.अल्कोहोल
D.Alcohol
D.الکحل

Answer: C.ब्रोमिन
C.Bromine
C.برومائن

124 सूचना: खालील दिलेल्या प्रश्नामध्ये काही विधाने आणि काही निष्कर्ष आहेत. सामन्यात: ज्ञात तथ्यांपेक्षा ते वेगळे असतील तर दिलेली विधाने तुम्हाला सत्य मानवी लागतील आणि त्यानंतर दिलेल्या विधानाचे अनुकरण दिलेल्यापैकी कोणता निष्कर्ष तार्किकदृष्ट्या करतो ते ठरवा.

विधाने:
B > C = D≥ X
निष्कर्ष:
I.B > X
II.C = X

DIRECTIONS: In the question given below, there are few statements followed by few conclusions. You have to take the given statements to be true even if they seem to be at variance with commonly known facts and then decide which of the given conclusion logically follow(s) from the given statements.

Statements:
B > C = D ≥ X
Conclusions:
I. B > X
II. C = X

ہدایات: مندرجہ ذیل سوال میں، کچھ بیانات کے بعد کچھ نتائج موجود ہیں. اگر آپ کو عام طور پر جانے جاتے حقائق کے ساتھ بھی متغیر ہونے لگے تو بھی آپ دئے گئے بیانات دماغ میں رکھیں اور پھر اس بات کا فیصلہ کریں کہ ذیل میں دیا گیا کونسا نتیجہ منطقانہ طور پر دیے گئے بیانات کی پیروی کرتا ہے.

بیانات:
B > C = D≥ X
نتائج:
B > X .I
C = X .II

A.तर फक्त I निष्कर्ष खरा आहे
A.If only Conclusion I is true
A.اگر صرف I نتیجہ درست ہے

B.तर फक्त II निष्कर्ष खरा आहे
B.If only Conclusion II is true
B.اگر صرف نتیجہ II درست

C.तर I किंवा II यापैकी एक निष्कर्ष खरा आहे
C.If either Conclusion I or II is true
C.اگر I اور II نتائج میں سے ایک درست ہے

D.तर I व II हे दोन्हीही निष्कर्ष खरे नाहीत
D.If neither Conclusion I nor II is true
D.اگر I اور II نتائج میں سے کوئی بھی درست نہیں

Answer: A.तर फक्त I निष्कर्ष खरा आहे
A.If only Conclusion I is true
A.اگر صرف I نتیجہ درست ہے

125 सूचना: खाली दिलेल्या प्रश्नात एक विधान आहे ज्याचे I आणि II असे दोन निष्कर्ष त्याखाली अंकित केलेले आहेत. या आधारे सर्वात योग्य पर्याय निवडा.

विधान:
महिलांशी दुर्व्यवहार करण्याच्या वार्ता करणारे लोक स्वत:च महिलांचा दुर्व्यवहार करण्यात सहभागी असतात.

निष्कर्ष:
I. लोक बोलतात एक आणि त्याच्या विरुद्ध कृती करतात.
II. महिला त्यांच्यासोबत दुर्व्यवहार करण्यासच पात्र असतात.

DIRECTIONS: The question below has a statement followed by two conclusions numbered I and II. Based on this choose the option that is most suitable.

Statement:
The people speaking against women abuse are themselves involved in women abuse.

Conclusions:
I. People have double standards.
II. Women deserve to be abused.

ہدایات: نیچے دیے گئے سوال میں ایک بیان کے بعد دو نتائج I اور II دیے گئے ہیں۔ اس کی بنیاد پرانتہائی موزوں آپشن کا انتخاب کیجیے۔

بیان:
خواتین سے زیادتی کے خلاف بات کرنے والے لوگ خود کو خواتین سے زیادتی کرنے میں ملوث ہیں.

نتیجے:
I. لوگ دوہرا معیار رکھتے ہیں.
II. خواتین زیادتی کی مستحق ہیں.

A.केवळ निष्कर्ष क्रमांक I विधानास अनुसरून आहे
A.Only Conclusion I follows
A. صرف نتیجہ I لاگو ہو گا۔

B.केवळ निष्कर्ष क्रमांक II विधानास अनुसरून आहे
B.Only Conclusions II follows
B.صرف نتیجہ II لاگو ہو گا۔

C.निष्कर्ष क्रमांक I किंवा II अनुसरून आहे
C.Either I or II follows
C. I یا II میں سے ایک لاگو ہو گا۔

D.कोणताही निष्कर्ष अनुसरून नाही
D.Neither I nor II follow
D. I اور II میں سے کوئی بھی لاگو نہیں ہو گا۔

Answer: A.केवळ निष्कर्ष क्रमांक I विधानास अनुसरून आहे
A.Only Conclusion I follows
A. صرف نتیجہ I لاگو ہو گا۔

126 अनुक्रम 24, 48, 72,..... चे 4थे पद शोधा

Find the 4th term of the sequence: 24, 48, 72,.....

72 ,48 ,24 :؟ اس سرج کی چوتھی ٹرم کیا ہے,.....

A.98
A.98
A.98

B.100
B.100
B.100

C.96
C.96
C.96

D.150
D.150
D.150

Answer: C.96
C.96
C.96

127

$$\sqrt{\frac{121}{16}} = ?$$

A. 0.162

B. 2.75

C. 16.3

D. 0.16

Answer: B. 2.75

128

गहाळ वर्ण शोधा.

Find the missing character.

. گمنام حرف کھوجے ،

F	W	O
A	J	K
E	M	?

A. N

B. P

C. X

D. D

Answer: D. D

129

खालीलपैकी कोणता प्राणी मांसाहारी प्राण्याचे उदाहरण आहे?

Which of the following animals is an example of carnivore?

مندرجہ ذیل میں سے کونسا جانور گوشت خور جانور کی ایک مثال ہے؟

A.सिंह
A.Lion
A.شیر

B.गाय
B.Cow
B.گائے

	C.कोंबडी C.Hen C.مرغی
	D.शेळी D.Sheep D.بھیڑ
Answer:	A.सिंह A.Lion A.شیر

130	खालीलपैकी अशुद्ध शब्द कोणता ?
	A.तीर्थोपाध्याय
	B.तीर्थविधी
	C.तुकतुकित
	D.तुटपुंजा
Answer:	C.तुकतुकित

131	28.43 × 500 = ? 28.43 × 500 = ? 28.43 × 500 = ?
	A.14215 A.14215 A.14215
	B.12215 B.12215 B.12215
	C.11215 C.11215 C.11215
	D.13215 D.13215 D.13215

Answer: A.14215
A.14215
A.14215

132 सूचना: प्रत्येक प्रश्नाला एक प्रमुख विधानासोबत चार विधाने आहेत ज्यांच्याखाली A, B, C आणि D असे चार विधान आहेत. क्रमवार विधानांची जोडी निवडा ज्यामध्ये प्रथम विधान दुसऱ्या विधानाला सुचवते, आणि दोन्ही विधाने तर्किकदृष्ट्या प्रमुख विधानासोबत निगडित असेल.

कपडे एकतर धुतलेले किंवा भिजवलेले आहेत.
A. कपडे एकतर धुतलेले आहेत.
B. कपडे एकतर धुतलेले नाहीत.
C. कपडे भिजवलेले आहेत.
D. कपडे भिजवलेले नाहीत.

DIRECTIONS: Each question has a main statement followed by four statements labelled A, B, C and D. Choose the ordered pair of statements, where the first statement implies the second, and the two statements are logically consistent with the main statement.

The clothes are either washed or soaked
A.The clothes were washed
B.The clothes were not washed
C.The clothes were soaked
D.The clothes were not soaked

کپڑے یا دھلے ہوئے ہیں یا بھگوئے ہوئے
A۔ کپڑے دھلے ہوئے تھے
B۔ کپڑے دھلے ہوئے نہیں تھے
C۔ کپڑے بھگوئے ہوئے تھے
D۔ کپڑے بھگوئے ہوئے نہیں تھے

A.BD
A.BD
A.BD

B.DA
B.DA
B.DA

C.CB
C.CB
C.CB

D.AB
D.AB
D.AB

Answer: B.DA
B.DA
B.DA

133 समीर हा वाहिकाचा पिता आहे जी दिशांतची बहीण आहे. रवीश हा रोनितचा भाऊ आहे, ज्याचे वडील दिशांत आहेत. समीरचे दिशांतसोबत नाते काय?

Sameer is father of Vahika who is sister of Dishant. Raveesh is brother of Ronit, whose father is Dishant. How is Sameer related to Dishant?

سامر وہکا کا باپ ہے جو دشانت کی بہن ہے. رویش رونت کا بھائی ہے، جسکا باپ دشانت ہے. سامر کا دشانت سے کیا رشتہ ہے؟

A.आई
A.Mother
A.ماں

B.काका
B.Uncle
B.چچا

C.पुतण्या
C.Nephew
C.بتیجا

D.वडील
D.Father
D.باپ

Answer: D.वडील
D.Father
D.باپ

134 सूचना: प्रत्येक प्रश्नाला एक प्रमुख विधानासोबत चार विधाने आहेत ज्यांच्याखाली A, B, C आणि D असे चार विधान आहेत. क्रमवार विधानांची जोडी निवडा ज्यामध्ये प्रथम विधान दुसऱ्या विधानाला सुचवते, आणि दोन्ही विधाने तर्किकदृष्ट्या प्रमुख विधानासोबत निगडित असेल.

तुम्ही पूर्ण फी भरली, तर तुम्हाल सर्व सुविधा मिळतील
A. तुम्ही पूर्ण फी भरली आहे
B. तुम्ही पूर्ण फी भरली नाही
C. तुम्हाल सर्व सुविधा मिळाल्या
D. तुम्हाल सर्व सुविधा मिळाल्या नाहीत

DIRECTIONS: Each question has a main statement followed by four statements labelled A, B, C and D. Choose the ordered pair of statements, where the first statement implies the second, and the two statements are logically consistent with the main statement.

When you pay full fee, you get all facilities
A. you have paid full fee
B. you have not paid full fee
C. you got all facilities
D. you did not get all facilities

جب آپ پوری فیس دیتے ہیں تو آپ کو ساری سہولتیں ملتی ہیں۔
Aآپ نے پوری فیس ادا کی ۔
Bآپ نے پوری فیس ادا نہیں کی ۔
Cآپ کو ساری سہولتیں ملیں ۔
Dآپ کو ساری سہولتیں نہیں ملیں ۔

A.AC
A.AC
A.AC

B.BC
B.BC
B.BC

C.DA
C.DA
C.DA

D.CD
D.CD
D.CD

Answer: A.AC
A.AC
A.AC

135 पृथ्वीच्या गुरुत्वाकर्षणाच्या क्षेत्राची तीव्रता येथे अधिक असते:

The intensity of the earth’s gravitational field is maximum at:

زمین کے ثقالتی فیلڈ کی شدت _____ پر زیادہ سے زیادہ ہوتی ہے۔

A.विषुववृत्त
A.The equator
A.خط استوا (اکویٹر)

B.पृथ्वीचा केंद्र
B.The center of the earth
B.زمین کا مرکز

C.ध्रुव
C.The pole
C.پول (زمین کا سرا)

D.यापैकी एकही नाही
D.None of these
D.ان میں سے کوئی نہیں

Answer: C.ध्रुव
C.The pole
C.پول (زمین کا سرا)

136 पायाच्या नखापासून डोक्याच्या शेंडीपर्यंत सर्व शरीरभर -

A.नसानसांत

B.कणाकणात

C.तनामनात

D.नखशिखान्त

Answer: D.नखशिखान्त

137 दिलेल्या मालिकेचा मध्यक काढा.
2, 8, 4, 3, 4, 3, 11

Find the median of the given series.
2, 8, 4, 3, 4, 3, 11

دی ہوئی سیریز کا اوسط (میڈین) ہوگا
2, 8, 4, 3, 4, 3, 11

A.4
A.4
A.4

B.8
B.8
B.8

C.2
C.2
C.2

D.1
D.1
D.1

Answer: A.4
A.4
A.4

138 ज्या मूड डिसऑर्डरमध्ये ओढ आणि नैराश्य हे दोन्ही एकाच वेळी उपस्थित असतात त्यास असे म्हणतात

Mood disorder in which both mania and depression are alternatively present is known as

مزاج(موڈ) کی خرابی جس میں دونوں جنون اور ڈپریشن متبادل طور پر موجود رہتا ہے اسے کس نام سے جانا جاتا ہے

A.नैराश्य विकार
A.Depression disorder
A.ڈپریشن کی بیماری

B.द्विधृवीय मूड डिसऑर्डर
B.Bipolar mood disorder
B.دو قطبی مزاجی مالیخولیا

C.अपगमन
C.Regression
C.ریگریشن

D.आक्रमण (अग्रेशन)
D.Aggression
D.جارحیت

Answer: B.द्विधृवीय मूड डिसऑर्डर
B.Bipolar mood disorder
B.دو قطبی مزاجی مالیخولیا

139 ‘हरित क्रांती’ मुळे _____ च्या उत्पादनामध्ये वाढ झाली –

‘Green Revolution’ led to increase in the production of -

ہرا انقلاب کی مدد سے پیداوار بڑھی۔

A.मासे
A.Fisheries
A.مچھلیوں کی

B.शेती
B.Agriculture
B.کھیتی میں

C.दुग्ध
C.Dairy
C.ڈیری میں

D.यांपैकी कोणतेही नाही
D.None of these
D.ان میں سے کوئی نہیں

Answer: B.शेती
B.Agriculture
B.کھیتی میں

140 Out of the four alternatives, choose the one which can be substituted for the given words/sentence.
An instrument used for measuring atmospheric pressure

A.Barometer

B.Stethoscope

C.Equinox

D.Siesta

Answer: A.Barometer

141 जर लालला पिवळा म्हटले, पिवळ्याला नारिंगी म्हटले, नारिंगीला गुलाबी म्हटले, गुलाबीला हिरवा म्हटले, हिरव्याला जांभळा म्हटले, आणि जांभळ्याला काळा म्हटले. तर झाडाचा रंग कोणता?

If red is called yellow, yellow is called orange, orange is called pink, pink is called green, green is called purple and purple is called black. What is the colour of a leaf?

اگر سرخ کو زرد، زرد کو نارنگی، نارنگی کو گلابی، گلابی کو سبز، سبز کو جامنی اور جامنی کو سیاہ کہا جائے تو، درخت کا رنگ کیا ہوتا ہے؟

A.गुलाबी
A.Pink
A.گلابی

B.हिरवा
B.Green
B.سبز

C.जांभळा
C.Purple
C.جامنی

D.काळा
D.Black
D.سیاہ

Answer: C.जांभळा
C.Purple
C.جامنی

142 **सूचना:** खालील प्रश्नात कागदाच्या एक तुकड्याला (चौकोनी / गोलाकार / त्रिकोणी) घड्या घातल्या आहेत व भोके पाडली आहेत. हा कागद उलगडल्यावर प्रश्नातील आकृतीप्रमाणे दिसतो. उत्तरादाखल पर्यायांमधून अशी आकृती निवडा जी उलगडल्यावर कागदाचे स्वरूप प्रश्नात दाखविल्याप्रमाणे दिसेल.

DIRECTIONS: In the following question a sheet (square/circle/triangle) of paper is folder and punch is made. When unfolded the paper sheet looks like the question figure. See the answer figures and select the one that follows the manner in which the paper is folded and punch is made.

ہدایات: مندرجہ ذیل سوال میں کاغذ کی شیٹ (مربع / دائرہ / مثلث) ایک فولڈر ہے اور اس میں چھید بنایا گیا ہے- جب کاغذ کی شیٹ کو کھولا جاتا ہے تو شیٹ سوال کے تصویر کی طرح نظر آتی ہے- جواب کی تصاویر کا ملاحظہ کریں اور ان میں سے ایک ایسی تصویر کو منتخب کریں جو اس طریقے کی پیروی کرتا ہے جس میں کاغذ کو موڑا گیا ہے اور چھید بنایا گیا ہے-

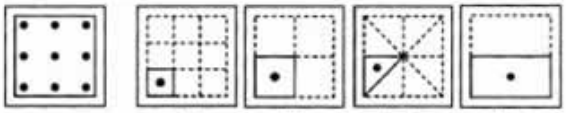

A. (A)

B. (B)

C. (C)

D. (D)

Answer: A. (A)

143 यापैकी कोणती आकृती वन्य प्राणी, सिंह आणि गाय यांच्या दरम्यानचे नाते उत्तमरित्या दर्शवते?

Which of the following diagram best represents the relationship among Wild Animals, Lion and Cow?

مندرجہ ذیل میں سے کونسی ڈایاگرام جنگلی جانوروں، شیر اور گائے کے درمیان تعلقات کی نمایندگی کرتی ہے؟

(A) 

(B) 

(C) 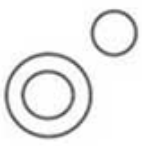

(D) 

Answer: (C) 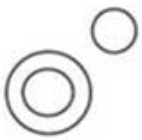

144 सूचना: खालील प्रश्नांमध्ये दिलेल्या पर्यायांमधून संबंधित अक्षर समूह निवडा.

SURAJ : URAJS :: RAJAN : ?

DIRECTIONS: In the following question, select the related group of letters from the given alternatives.

SURAJ : URAJS :: RAJAN : ?

سمت: مندرجہ ذیل سوال میں، دیے گئے متبادل میں سے حروف کا متعلقہ گروپ منتخب کریں۔

SURAJ : URAJS :: RAJAN : ?

A.QBEAR
A.QBEAR
A.QBEAR

B.AJANR
B.AJANR
B.AJANR

C.NEARE
C.NEARE
C.NEARE

D.QEERA
D.QEERA
D.QEERA

Answer: B.AJANR
B.AJANR
B.AJANR

145 Out of the given options which best expresses the meaning of the given Proverb?
Better to light one candle than to curse the darkness.

A.We should try to overcome the difficulty rather than to complain about the situation

B.If we keep complaining about an unpleasant situation, the things will gradually start becoming better

C.We should never light a single candle at the time of electricity failure

D.Sitting at one place at the time of electricity failure is better than running in opposite direction

Answer: A.We should try to overcome the difficulty rather than to complain about the situation

146 सूचना: या प्रत्येक प्रश्नांमध्ये तुम्हाला A आणि B अशी दोन विधाने दिलेली आहे आणि I आणि IIअसे दोन निष्कर्ष दिलेले आहेत. सामान्यपणे माहीत असलेल्या तथ्यांशी जुळत नसले तरी खालील दोन विधाने बरोबर आहेत असे समजा. खालीलपैकी कोणते निष्कर्ष दिलेल्या वाक्यांना संपूर्णपणे लागू आहे ते ठरवा.
निवेदन:
A: सर्व कोंबड्या कावळे आहेत.
B: सर्व कावळे घोडे आहेत.
निष्कर्ष:
I: काही घोडे कोंबड्या असतात.
II: काही कोंबड्या घोडे आहेत.

DIRECTION: In each of these questions, you are given two statements A and B followed by two conclusions (I) and (II). You have to take the two statements to be true even if they seem to be at variance from commonly known facts. You are to decide which of the given conclusions definitely follows from the given statements.

Statements:
A: Some hens are crows.
B: All crows are horses.

Conclusions:
I: Some horses are hens.
II: Some hens are horses.

ہدایت:ان سوالوں میں سے ہر ایک میں، آپ کو دو بیانات A اور B دیے گئے ہیں جن کے بعد دو نتائج (I) اور (II) دیے گئے ہیں۔ آپ کو دونوں بیانات کو درست تسلیم کرنا ہے اگرچہ وہ عام طور پر معلوم حقائق کے برعکس نظر آتے ہوں۔ آپ کو فیصلہ کرنا ہے کہ دیے گئے نتائج میں سے کون یقینی طور پر دیے گئے بیانات کی پیروی کرتا ہے۔

بیانات:
A: کچھ مرغیاں کوے ہیں۔
B: سبھی کوے گھوڑے ہیں۔

حل:
I: کچھ گھوڑے مرغیاں ہیں۔
II. کچھ مرغیاں گھوڑے ہیں۔

A.जर केवळ निष्कर्ष I निघत असल्यास.
A.If only conclusion I follows
A.صرف نتیجہ I پیروی کرتا ہے۔

B.जर केवळ निष्कर्ष II निघत असल्यास.
B.If only conclusion II follows
B.صرف نتیجہ II پیروی کرتا ہے۔

C.जर दोन्ही निष्कर्ष I आणि II निघत असल्यास.
C.If both I and II follow
C.دونوں I اور II پیروی کرتے ہیں۔

D.जर दोन्ही निष्कर्ष I आणि II निघत नसल्यास.
D.If neither I nor II follows
D.نہ تو I نہ ہی II پیروی کرتا ہے۔

Answer: C.जर दोन्ही निष्कर्ष I आणि II निघत असल्यास.
C.If both I and II follow
C.دونوں I اور II پیروی کرتے ہیں۔

147 खालीलपैकी कश्याला एक समान न्यूट्रॉन आणि प्रोटॉन आहेत?

Which of the following has an equal number of Neutrons and Protons?

مندرجہ ذیل میں سے کس میں نیوٹرون اور پروٹون کی مساوی تعداد ہے؟

A.हायड्रोजन
A.Hydrogen
A.ہائڈروجن

B.क्लोरीन
B.Chlorine
B.کلورائن

C.ड्युटेरियम
C.Deuterium
C.دیوٹیریم

D.फ्लोरिन
D.Fluorine
D.فلورائن

Answer: C.ड्युटेरियम
C.Deuterium
C.دیوٹیریم

148 Choose the word which is opposite in meaning to the given word.
ARID

A.Wet

B.Dry

C.Parched

D.Scorched

Answer: A.Wet

149 जसेजसे वय वाढत आहे आपण आपल्या वृद्धत्वामुळे चिंताग्रस्त होतो. आपली चिंता कमी करण्यासाठी आपण काय करणार?

As the age is increasing you become anxious for your old age. What would you do to eliminate the anxiety?

جیسا کہ عمر بڑھ رہی ہے آپ اپنی عمر کے لئے فکر مند ہو جاتے ہیں.تشویش کو ختم کرنے کے لئے آپ کیا کریں گے؟

A.तणाव टाळण्यासाठी वेळेनुसार वयाला घेऊन सज्ज राहू
A.Timely preparation for the age to avoid the tensions
A.کشیدگی سے بچنے کے لئے عمر کے لئے بروقت تیاری

B.अनैच्छिक भावनेस नियंत्रणात ठेवण्यास योगा शिकू
B.Learn yoga to control undesirable emotions
B.غیر مطلوب جذبات کو کنٹرول کرنے کے لئے یوگا سیکھیں

C.अनावश्यकरित्या भविष्याचा विचार करत आपण आपला वर्तमानकाळ व्यर्थ घालवणार नाही.
C.You don’t waste present while thinking for future unnecessarily.
C.غیر ضروری طور پر مستقبل کے بارے میں سوچ کر آپ اپنے حال کو برباد نہیں کرتے.

D.वरीलपैकी सर्व
D.All of the above
D.مذکورہ تمام

Answer: D.वरीलपैकी सर्व
D.All of the above
D.مذکورہ تمام

150 सूचना : खालील प्रत्येक प्रश्नात दोन विधाने I आणि II दिलेले आहेत. हे विधान एकतर स्वतंत्र कारण असू शकतात किंवा स्वतंत्र कारणांचे परिणाम असू शकतात. यांपैकी एक विधान इतर विधानाचा परिणाम असू शकतो. दोन्ही विधाने वाचा आणि खालीलपैकी कोणत्या उत्तराचा पर्याय या दोन्ही विधानांमधील संबंधांचे वर्णन करतो ते ठरवा.

विधान :
I. सरकार हॉटेल उद्योगाला प्रोत्साहन देऊ इच्छितो.
II. सरकारने हॉटेल उद्योगासाठी कर सवलत जाहीर केली आहे.

DIRECTIONS: Below in each question are given two statements I and II. These statements may be either independent causes or may be effects of independent causes. One of these statements may be the effect of the other statement. Read both the statements and decide which of the following answer choice correctly depicts the relationship between these two statements.

Statements:
I. The government wants to promote hotel industry.
II. The government has announced tax holiday for the hotel industry.

زاد وجوہات یا پھر آزاد وجوہات کے اثرات ہو سکتے ہیں۔ ان دیے گئے ہیں۔ یہ بیانات یا تو آ II اور I ہدایات: نیچے ہر سوال میں دو بیانات بیانات میں سے ایک بیان دوسرے کا اثر ہو سکتا ہے۔دونوں بیانات پڑھیں اور فیصلہ کریں کہ نیچے دیے گئے کس جواب کا انتخاب ان دونوں بیانات کے در میان تعلق کو ٹھیک سے ظاہر کرتا ہے۔

بیانات:
I – حکومت ہوٹل انڈسٹری کو فروغ دینا چاہتی ہے۔
II ۔ حکومت نے ہوٹل انڈسٹری کے لیے ٹیکس ہالیڈے کا اعلان کیا ہے۔

A.विधान I कारण आहे आणि विधान II त्याचा परिणाम आहे;
A.Statement I is the cause and statement II is its effect;
A.بیان نمبر I وجہ ہے اور بیان نمبر II اس کا اثر ہے۔

B.विधान II कारण आहे आणि विधान I त्याचा परिणाम आहे
B.Statement II is the cause and statement I is its effect;
B.بیان نمبر II وجہ ہے اور بیان نمبر I اس کا اثر ہے۔

C.विधान I आणि II दोन्ही स्वतंत्र कारणे आहेत;
C.Both the statements I and II are independent causes;
C.دونوں بیانات نمبر I اور نمبر II آزاد وجوہات ہیں۔

D.विधान I आणि II दोन्ही स्वतंत्र कारणांचे परिणाम आहेत;
D.Both the statements I and II are effects of independent causes;
D.دونوں بیانات نمبر I اور نمبر II آزاد وجوہات کے اثرات ہیں۔

Answer: A.विधान I कारण आहे आणि विधान II त्याचा परिणाम आहे;
A.Statement I is the cause and statement II is its effect;
A.بیان نمبر I وجہ ہے اور بیان نمبر II اس کا اثر ہے۔

151 विद्यार्थ्यांच्या वर्गात साईरामचा वरून 23 वा क्रमांक आहे तर त्याचा खालून 27 वा क्रमांक लागतो. तर वर्गात एकूण किती विद्यार्थी आहेत ?

In a class of students, Sairam's rank is 23rd from top, whereas his rank is 27th from below. How many students are there in the class?

طالب علم کی کلاس میں، سیرم کہ اپر سے 23 وہ درجہ ہے، جبکہ نیچے سے اسکا درجہ 27 وہ ہے.کلاس میں کتنے طالب علم ہے؟

A.50
A.50
A.50

B.40
B.40
B.40

C.48
C.48
C.48

D.49
D.49
D.49

Answer: D.49
D.49
D.49

152 आपली धार्मिक संहिष्णुता तेव्हा जागी होते जेव्हा-

Your religious tolerance appears when—

- آپ کی مذہبی رواداری ظاہر ہوتی ہے،جب

A.आपण सर्वधर्म समभाव पाळणार
A.You will pay respect to all religions
A.آپ تمام مذاہب کا احترام کریں گے

B.आपण आपल्या स्वत:च्या धर्माचा आदर करणार
B.You will pay respect to your own religion
B.آپ اپنے مذہب کا احترام کریں گے

C.इतर धर्माशी आपण संबंध ठेवणार नाही
C.You will not expose yourself in relation to other religions
C.آپ اپنے آپ کو دوسرے مذاہب کے بارے میں ظاہر نہیں کریں گے

D.आपण नास्तिक आहात, म्हणून दुसऱ्या धर्माच्या संहिष्णुतेचा प्रश्नच उद्भवत नाही.
D.You are an atheist, so the question doesn't arise of religious tolerance.
D.آپ ایک ملحد ہیں، لہذا مذہبی رواداری کا سوال پیدا ہی نہیں ہوتا ہے.

Answer:
A.आपण सर्वधर्म समभाव पाळणार
A.You will pay respect to all religions
A.آپ تمام مذاہب کا احترام کریں گے

153 सूचना: अर्थपूर्ण परिच्छेद निर्माण करण्यासाठी, खाली दिलेली (P), (Q) (R), (S) आणि (T) ही पाच वाक्ये योग्य अनुक्रमाने पुनर्रचना करा; त्यांनतर खालील प्रश्नांची उत्तर द्या.

P. माकडाने केकचे दोन तुकडे केले पण मान हलवून सांगितले कि ते समान नाहीत.
Q. मेजवानीनंतर डॉ मांजरांना एक केकचा तुकडा दिसतो आणि त्याच्यासाठी भांडण लागते.
R. तसे तो सतत करत राहिल्याने केक संपून गेला आणि दोन्ही मांजरं निराश झाली.
S. माकडाने ही लाभ मिळविण्याची संधी समजून त्यांना मदत देऊ केली.
T. त्याने एका तुकड्याचा एक घास खाल्ला आणि दुसऱ्या तुकड्याचा, तरीही ते दोन्ही समान झाले नाहीत.

पुनर्रचना केल्यानंतर खालीलपैकी कोणते वाक्य चौथे असेल

DIRECTION: Rearrange the following five sentences (P), (Q), (R), (S) and (T) in the proper sequence to form a meaningful paragraph; then answer the questions given below them.
P. The monkey divides the cake into two parts but shakes its head saying they are unequal.
Q. After a feast, two cats see a piece of cake and start fighting for it.
R. He continues doing so until there is no more cake left, leaving the poor little cats disappointed.
S. A monkey sees this as an opportunity for gain and offers to help them.
T. He takes a bite of one piece and then the other, but still finds them unequal.

Which of the following should be the FOURTH sentence after rearrangement?

ہدایات: ان پانچ جملوں (P)، (Q)، (R)، (S) اور (T) کو با معنی پیرا بنانے کے لئے دوبارہ ترتیب دیجئے، پھر نیچے دے گئے سوالوں کے جواب دیجئے

P. بندر نے کیک کو دو حصّوں میں تکسیم کیا لیکن بے کہکر اپنا سر ہلایا کہ دونو برابر نہی ہے.
Q. دعوت کے بعد، دو بلیوں نے کیک کہ ٹکڑا دیکھا اور اسکے لئے لڑنا شرو کیا.
R. وو یہ لگاتار کرنے لگا جب تک کچھ کیک نہی بچا،اور بیچاری چھوٹی بلیوں کو مایوس کیا.
S. ایک بندر کو یہ فائدہ اٹھانے کہ موکا لگا اور مدد کی پیشکش کی.
T. اسنے ایک کو دانت سے کاٹا اور پھر دوسرے کو، لیکن پھر بھی چھوٹا بڑا پایا.

دوبارہ ترییب دینے کے بعد کون سا جملہ چوتھا ہونا چاہیے؟

A.T
A.T
A.T

B.P
B.P
B.P

C.Q
C.Q
C.Q

D.S
D.S
D.S

Answer: A.T
A.T
A.T

154 DIRECTIONS: A sentence with an underlined phrasal verb is given below. Out of the four options, choose the one which can be substituted for the given phrasal Verb.
His parent's encouragement bore him up through a very hard time.

A.sustained

B.dropped

C.discouraged

D.demotivated

Answer: A.sustained

155 'दगाफटका' या शब्दाचा विरुद्धार्थी शब्द कोणता ?

A.कपट

B.लुच्चेगिरी

C.फटकारणे

D.इमान

Answer: D.इमान

156 सूचना: खाली दिलेल्या प्रश्नांमध्ये प्रत्येकी तीन विधानांचे चार गट आहेत. प्रत्येक समूहातील विधाने काळजीपूर्वक वाचा आणि तिसरे विधान तर्कशुद्धपणे पहिल्या दोन विधानांचे अनुसरण करणारा(रे) गट ओळखा.
(a) कोणताही कलात्मक नास्तिक नसतो. काही कलात्मक एकेश्वरवादी असतात. काही एकेश्वरवादी बहुदेववादी नसतात.
(b) सर्व वाक्य शब्द असतात. कोणत्याही शब्दाला अर्थ नसतो असे नाही. काही ज्यांना अर्थ नसतो ते वाक्य नसतात.
(c) कोणतीही नदी समुद्र नसते. काही समुद्र महासागर असतात. काही महासागर नद्या नसतात
(d) कोणतेही MMTS हे MRTS नसते. सर्व सार्वजनिक वाहने MRTS असतात. कोणतेही सार्वजनिक वाहन हे MMTS नसते.

DIRECTION: The questions given below have four groups of three statements each. Read the statements in each group carefully and identify the group/groups where the third statement logically follows the first two statements in the group.

(a) No esthetic is an atheist. Some esthetics are monotheists. Some monotheists are not polytheists.
(b) All sentences are words. No word does not have meaning. Some which do not have meanings are not sentences.
(c) No river is sea. Some seas are oceans. Some oceans are not rivers.
(d) No MMTS is MRTS. All public transports are MRTS. No public transport is MMTS.

ہدایت: ذیل میں دیے گئے سوالات کے تین بیانات میں سے ہر ایک کے چار گروپ ہیں۔ ہر گروپ میں بیانات کو دھیان سے پڑھیں اور اس گروپ/گروپس کی شناخت کریں جہاں تیسرا بیان منطقی طور پر گروپ میں پہلے دو بیانات کی پیروی کرتا ہو۔

(a) کوئی جمال پرست الحاد پرست نہیں ہے۔ کچھ جمال پرست توحید پرست ہیں۔ کچھ توحید پرست مشرک نہیں ہیں۔
(b) سبھی جملے الفاظ ہیں۔ کسی لفظ میں معنی نہیں ہے۔ کچھ جس میں معنی نہیں ہیں جملے نہیں ہیں۔
(c) کوئی ندی سمندر نہیں ہے۔ کچھ سمندر ساگر نہیں ہیں۔ کچھ سمندر ندیاں نہیں ہیں۔
(d) کوئی MMTS بھی MRTS نہیں ہے۔ سبھی عوامی ٹرانسپورٹ MRTS نہیں ہے۔ کوئی عوامی ٹرانسپورٹ MMTS ہیں۔

A.केवळ b, c, आणि d
A.Only b, c and d
A.صرف c، b اور d

B.केवळ c आणि d
B.Only c and d
B.صرف c اور

C.केवळ a आणि b
C.Only a and b
C.صرف a اور b

D.केवळ b आणि c
D.Only b and c
D.صرف bاور c

Answer: A.केवळ b, c, आणि d
A.Only b, c and d
A.صرف c، b اور d

157 दिलेल्या पर्यायांपैकी वेगळे ते निवडा:

Select the odd one out from the given options:

دیے گئے اختیارات میں سے بے جوڑ کو منتخب کریں:

A.ट्रिक
A.Trick
A.Trick

B.ब्रिक
B.Brick
B.Brick

C.क्वायट
C.Quiet
C.Quiet

D.प्रिक
D.Prick
D.Prick

Answer: C.क्वायट
C.Quiet
C.Quiet

158 निर्देश: खालीलपैकी प्रत्येक प्रश्नात, मालिकेमधील एक संख्या चुकीची आहे. चुकीची संख्या शोधा.
376, 188, 88, 40, 16, 4, -2

DIRECTION: In each of the following questions, one number is wrong in the series. Find out the wrong number.

376, 188, 88, 40, 16, 4, -2

ہدایت ہر سوال میں یک نمبر غلط ہے . اس غلط نمبر کو کھوجے .

376, 188, 88, 40, 16, 4, -2

A.4
A.4
A.4

B.16
B.16
B.16

C.40
C.40
C.40

D.188
D.188
D.188

Answer: D.188
D.188
D.188

159 सिएएस (कॉग्निटिव्ह असेसमेंट सिस्टम) यांनी विकसित केली

CAS (Cognitive Assessment system) was developed by

CAS (ادراک کے تجزیہ کا نظام) (کوگنٹیو اسیسمنٹ سسٹم) بنایا تھا:

A.जे.पी.दास आणि नागलेरी
A.J.P Das & Naglieri
A. جے پی داس اور نگلیری

B.सीबी राईस
B.CB Rice
B.سی بی رائس

C.बेनेट आणि सायमन
C.Benet & Simon
C.بنٹ اور سائمن

D.आर्थर जेन्सेन
D.Arthur Jensen
D. ارتھر جنسن

Answer: A.जे.पी.दास आणि नागलेरी
A.J.P Das & Naglieri
A. جے پی داس اور نگلیری

160 A sentence with an underlined idiomatic expression is given. What is the meaning of the idiomatic expression ‘keep the wolf from the door’ in the sentence given below?
In many countries people are working simply to keep the wolf from the door, and owning a car or washing machine is just a dream

A.Ward off starvation or financial ruin.

B.Not allowing the animals to enter the house

C.Not keeping animals as pets

D.None of the above

Answer: A.Ward off starvation or financial ruin.

161 सूचना: वेगळे ते निवडा.

DIRECTIONS: Choose the odd one out.

سمت: بے جوڑ کو چنیں۔

A.DeJQ
A.DeJQ
A.DeJQ

B.PaKB
B.PaKB
B.PaKB

C.SGuA
C.SGuA
C.SGuA

D.KZbR
D.KZbR
D.KZbR

Answer: D.KZbR
D.KZbR
D.KZbR

162 एखाद्या विषयावर कल्पनांचे बोधात्मक विचारांचा घटक म्हणजे

Cognitive component of thoughts of ideas regarding a topic

کسی ایک موضوع کے حوالے سے افکار وآئیڈیاز کے وجدانی عنصر کو _____کہتے ہیں۔

A.केंद्रीय पात्रता
A.Central aptitude
A.سنٹرل اپٹی ٹیوڈ (مرکزی فطری صلاحیت)

B.विश्वास
B.Belief
B.عقیدہ

C.बोधात्मक घडामोडी
C.Cognitive affairs
C.وجدانی امور

D.सहकार
D.Co-operation
D. تعاون

Answer: B.विश्वास
B.Belief
B.عقیدہ

163 विधान:
महाविद्यालयातील प्राचार्य मुलांच्या पोर्नोग्राफीच्या विक्रीसाठी शहरातील विद्यार्थी आढळतात.

कृतीचा कोर्स:
I. प्राचार्य यांनी विद्यार्थ्यांना उधळले पाहिजे.
II. विद्यार्थी पोलिसांना सोपवणे आवश्यक आहे.

Statement:
A Principal of the college found a student in the city selling pornography to children.
Course of actions:
I. The Principal should rusticate the student.
II. The student should be handed over to the police

بیان:
ایک کالج کے پرنسپل نے ایک طالبعلم کو شہر میں بچوں کو فحش فلمیں فروخت کرتے ہوئے دیکھا۔

لائحہ عمل:
I۔ پرنسپل کو اس طالبعلم کو معطل کر دیناچاہیے۔
II۔ اس طالبعلم کو پولیس کے حوالے کیا جانا چاہیے۔

A.फक्त I अनुसरून आहे
A.Only I follows
A. صرف I لاگو ہو گا۔

B.फक्त II अनुसरण करते आहे
B.Only II follows
B. صرف II لاگو ہو گا۔

C.एकतर I किंवा II अनुसरून आहे
C.Either I or II follows
C. I یا II میں سے ایک لاگو ہو گا۔

D.I किंवा II दोन्हीपैकी काहीही अनुसरण करत नाही
D.Both I and II follow
D. I اور II دونوں لاگو ہوں گے۔

Answer: D.I किंवा II दोन्हीपैकी काहीही अनुसरण करत नाही
D.Both I and II follow
D. I اور II دونوں لاگو ہوں گے۔

164 जर आपल्या मित्राने आपल्याला आंदोलनात सक्रियतेने भाग घ्यायला सांगितले असता आपण त्याला नकार दिला, मग अश्या परिस्थितीत आपली प्रतिक्रिया काय असेल?

If a friend instigates you to participate actively in the strike but you disagree with them, then how will you react in this situation?

اگر کوئی دوست آپ کو ہڑتال میں فعال طور پر حصہ لینے کے لئے مجبور کرتا ہے لیکن آپ ان سے متفق نہیں ہیں، تو آپ اس حالت میں کس طرح ردعمل کریں گے؟

A.आपण अप्रत्यक्षरित्या त्यांना समर्थन देऊ पण समस्यांना नाही
A.You indirectly co-operate them but not with the issues
A.آپ بالواسطہ طور پر ان کےساتح تعاون کریں گے لیکن مسائل کے ساتھ نہیں

B.आपली अंतरात्मा साथ देत नसल्यामुळे आपण सक्रियतेने भाग घेणार नाही
B.You will not participate actively as your consciousness does not allow you
B.آپ فعال طور پر حصہ نہیں لیں گے کیونکہ آپ کاضمیر آپ کو اسکی اجازت نہیں دیتا ہے

C.आपण पहिले आपले कर्तव्य पार पाडू नंतर दुसरे काही
C.You first do your duties then something else
C.آپ سب سے پہلے اپنے فرائض سرانجام دیتے ہیں پھر کچھ اور

D.भांडन संपवण्यासाठी आपण आपल्या मित्राच्याच विरुद्ध चळवळ उभारू
D.You will launch a movement against your friends to resolve the conflict.
D.تنازعات کو حل کرنے کے لئے آپ اپنے دوستوں کے خلاف ایک تحریک شروع کریں گے.

Answer: C.आपण पहिले आपले कर्तव्य पार पाडू नंतर दुसरे काही
C.You first do your duties then something else
C.آپ سب سے پہلے اپنے فرائض سرانجام دیتے ہیں پھر کچھ اور

165 जर '+' म्हणजे '- ', ' -' म्हणजे 'x ', 'x 'म्हणजे' ÷' आणि '÷ 'म्हणजे '+' ,त 2 ÷ 6 x 6 ÷ 2 = ?

If '+' means '- ', ' -' means 'x ', 'x ' means ' ÷' and '÷ ' means '+' ,then 2 ÷ 6 x 6 ÷ 2 = ?

اگر '+' مطلب '-'، '-' مطلب 'x'، 'x' مطلب '÷' اور '÷' مطلب '+' تو 2 ÷ 6 x 6 ÷ 2 = ?

A. 1

B. 0

C. 10

D. 5

Answer: D. 5

166 निर्देश: खालील प्रत्येक वर्ण मालिके मध्ये, काही अक्षरे गहाळ आहेत, जे खाली दिलेल्या पर्यायां मध्ये एका क्रमाने दिलेली आहेत. योग्य पर्याय निवडा.

abb - baa - a - bab - ab

DIRECTION: In each of the following letter series, some of the letters are missing, which are given in that order as one of the alternatives below it. Choose the correct alternative.

abb - baa - a - bab - ab

ہدایت نیچے دے حرف کے سرج مے کچھ حرف گمشدہ ہے نیچے دے گئے اختیارات سے سسہی اختیار چنے

abb - baa - a - bab - ab

A.abba
A.abba
A.abba

B.ahab
B.ahab
B.ahab

C.ccac
C.ccac
C.ccac

D.aabb
D.aabb
D.aabb

Answer: A.abba
A.abba
A.abba

167	सरळ रूप द्या: 948.95 – 868.49 = ? Simplify: 948.95 – 868.49 = ? آسان بنائیں: 948.95 – 868.49= ?
	A.80.459999999999994 A.80.459999999999994 A.80.459999999999994
	B.81.459999999999994 B.81.459999999999994 B.81.459999999999994
	C.79.459999999999994 C.79.459999999999994 C.79.459999999999994
	D.82.47 D.82.47 D.82.47
Answer:	A.80.459999999999994 A.80.459999999999994 A.80.459999999999994
168	कंप्यूटरमधून फाईल कायमची काढून टाकण्यासाठी, डिलिट कीसह कोणती की (key) सह की दाबणे गरजेचे असते? To delete a file permanently from a computer, which key needs to be pressed along with the delete key? کسی فائل کو ہمیشہ کے لئے ڈیلیٹ کرنے کے لئے ڈیلیٹ کے ساتھ کون سی کی (KEY) دبانا چاہیے۔
	A.टॅब A.Tab A.TAB
	B.अल्ट B.Alt B.ALT

C.शिफ्ट
C.Shift
C.SHIFT

D.एफ5 (F5)
D.F5
D.F5

Answer: C.शिफ्ट
C.Shift
C.SHIFT

169 एक दैवी गुण संपन्न असलेला विद्यार्थी अतिशय गंभीर दिसतो, शाळेतील कुठल्याही कार्यात, खेळात किंवा सांस्कृतिक सोहळ्यात भाग घेत नाही. त्याची आवड आपण कशी शोधून काढणार?

A gifted student who appears very serious, and do not participate in any school' activities, games or cultural meets. What will you do to bring out favorable interest in that child?

ایک گفٹڈ طالب علم جو بہت سنجیدہ معلوم ہوتا ہے اور وہ اسکول کی کسی بھی سرگرمیوں، کھیلوں یا ثقافتی ملاقاتوں میں حصہ نہیں لیتا ہے.آپ اس بچے میں دلچسپی پیدا کرنے کے لئے کیا کریں گے؟

A.कारण तो विद्यार्थी दैवी गुण संपन्न असल्यामुळे आपण त्याला अजिबात त्रास देणार नाही
A.Because the student is gifted you will not disturb him at all
A.کیونکہ طالب علم گفٹڈ ہے آپ اسے بالکل پریشان نہیں کریں گے

B.आपण त्याचे ध्यान हळूहळू खेळ व अशा तर्हेच्या उपक्रमांकडे वळवू
B.You will mold his temperament gradually towards games and such activities
B.آپ آہستہ آہستہ اس کے مزاج کو کھیل اور اس طرح کی دیگر سرگرمیوں کی طرف منتقل کریں گے

C.त्याची खेळात तसेच अभ्यासात कामगिरी उत्कृष्ठ असावी म्हणून त्याच्यावर दबाव बनवून ठेवणार
C.Maintaining pressure that he can excel in games also as in studies
C.دباؤ کو برقرار رکھنا تاکہ وہ کھیلوں میں بھی تعلیم کی طرح کارکردگی دکھا سکے

D.त्याच्या वर्गमित्रांना त्यांच्या मित्राला प्रोत्साहित करण्यासाठी असच करण्यास सांगणार.
D.Ask his class-males to motivate their friend for the same.
D.اس کے کلاس کے لوگوں کو کہیں کہ وہ اپنے دوست کی بھی اس کے لئےحوصلہ افزائی کریں.

Answer: B.आपण त्याचे ध्यान हळूहळू खेळ व अशा तर्हेच्या उपक्रमांकडे वळवू
B.You will mold his temperament gradually towards games and such activities
B.آپ آہستہ آہستہ اس کے مزاج کو کھیل اور اس طرح کی دیگر سرگرمیوں کی طرف منتقل کریں گے

170 पुढील म्हण पूर्ण करा - ' गरज सरो ------- मरो '

A.गर्व

	B.इच्छा
	C.वैद्य
	D.माशी
Answer:	C.वैद्य

171	कोणत्या मुघल सम्राटाने शिवाजींना घरामध्ये कोंडून ठेवले? Which Mughal emperor had put Shivaji on house arrest? کس مغل بادشاہ نے شواجی کو نظر بند کیا۔
	A.अकबर A.Akbar A.اکبر نے
	B.शाह जहान B.Shah Jahan B.شاہجہاں نے
	C.औरंगजेब C.Aurangzeb C.اورنگ زیب نے
	D.बहादूर शाह I D.Bahadur Shah I D.بہادر شاہ I نے
Answer:	C.औरंगजेब C.Aurangzeb C.اورنگ زیب نے

172	$\frac{6\times6\times6-5\times5\times5}{6\times6+6\times5+5\times5}=?$
	A. 1
	B. 5
	C. 7
	D. 10
Answer:	A. 1

173

दिलेल्या चौकोनाची कर्णरेषा $4\sqrt{2}$ सेंमी आहे. दिलेल्या चौकोनाच्या दुप्पट क्षेत्रफळ असणाऱ्या चौकोनाची कर्णरेषा किती असेल?

Diagonal of a given square is $4\sqrt{2}$ cm. What is the diagonal of the other square whose area is double of the given square?

دیں گئی مربع کا وتر $4\sqrt{2}$ سینٹی میٹر ہے۔ تو دوسرے ایسے مربع کا وتر کیا ہوگا جسکا رقبہ دیں گئی مربع کا دوگنا ہے؟

(A) $8\sqrt{2}$ सेंमी
$8\sqrt{2}$ cm
$8\sqrt{2}$سینٹی میٹر

(B) 16 सेंमी
16 cm
16سینٹی میٹر

(C) $\sqrt{32}$ सेंमी
$\sqrt{32}$ cm
$\sqrt{32}$سینٹی میٹ

(D) 8 सेंमी
8 cm
8سینٹی میٹر

Answer:

(D) 8 सेंमी
8 cm
8سینٹی میٹر

174

एका संख्येच्या वर्गमूळाचा 1/3 वा भाग हा 0.1 आहे. ती संख्या आहे:

1/3 Part of square root of a number is 0.1. The number is:

ایک عدد کے مربع روٹ کا حصہ ہے 0.1۔ عدد ہے1/3:

A.8.9999999999999998E-4
A.8.9999999999999998E-4
A.8.9999999999999998E-4

B.0.01
B.0.01
B.0.01

C.9.0000000000000006E-5
C.9.0000000000000006E-5
C.9.0000000000000006E-5

D.यांपैकी कोणतेही नाही
D.None of these
D.ان میں سے کوئی نہیں

Answer: D.यांपैकी कोणतेही नाही
D.None of these
D.ان میں سے کوئی نہیں

175 एका गृहस्थाकडे बोट दाखवून, दिपक म्हणतोः “त्याचा एकुलता भाऊ माझ्या मुलीच्या वडिलांचा पिता आहे.” त्या गृहस्थाचे दिपकसोबत नाते काय?

Pointing to a gentleman, Deepak said, “His only brother is the father of my daughter’s father”. How is the gentleman related to Deepak?

شریف آدمی کی طرف اشارہ کرکے، دیپک نے کہا، " اسکا واحد بھائی میری بیٹی کے باپ کا باپ ہے؟ شریف آدمی کا دیپک سے کیا رشتہ تھا؟

A.आजोबा
A.Grandfather
A.دادا

B.वडील
B.Father
B.باپ

C.मेव्हणा
C.Brother-in-Law
C.جی جا

D.काका
D.Uncle
D.چچا

Answer: D.काका
D.Uncle
D.چچا

176	निर्देश: मालिका पूर्ण करा E, J, ?, T,Y DIRECTION: Complete the series E, J, ?, T,Y ہدایت اس سرج کو مکمّل کرو E, J, ?, T, Y
	A.K A.K A.K
	B.O B.O B.O
	C.U C.U C.U
	D.L D.L D.L
Answer:	B.O B.O B.O

177 सूचना: अर्थपूर्ण परिच्छेद निर्माण करण्यासाठी, खाली दिलेली (P), (Q) (R), (S) आणि (T) ही पाच वाक्ये योग्य अनुक्रमाने पुनर्रचना करा; त्यांनतर खालील प्रश्नांची उत्तर द्या.

P. माकडाने केकचे दोन तुकडे केले पण मान हलवून सांगितले कि ते समान नाहीत.
Q. मेजवानीनंतर डॉ मांजरांना एक केकचा तुकडा दिसतो आणि त्याच्यासाठी भांडण लागते.
R. तसे तो सतत करत राहिल्याने केक संपून गेला आणि दोन्ही मांजरं निराश झाली.
S. माकडाने ही लाभ मिळविण्याची संधी समजून त्यांना मदत देऊ केली.
T. त्याने एका तुकड्याचा एक घास खाल्ला आणि दुसऱ्या तुकड्याचा, तरीही ते दोन्ही समान झाले नाहीत.

पुनर्रचना केल्यानंतर खालीलपैकी कोणते वाक्य पाचवे असेल?

DIRECTION: Rearrange the following five sentences (P), (Q), (R), (S) and (T) in the proper sequence to form a meaningful paragraph; then answer the questions given below them.
P. The monkey divides the cake into two parts but shakes its head saying they are unequal.
Q. After a feast, two cats see a piece of cake and start fighting for it.
R. He continues doing so until there is no more cake left, leaving the poor little cats disappointed.
S. A monkey sees this as an opportunity for gain and offers to help them.
T. He takes a bite of one piece and then the other, but still finds them unequal.

Which of the following should be the FIFTH sentence after rearrangement?

ہدایات: ان پانچ جملوں (P)، (Q)، (R)، (S) اور (T) کو با معنی پیرا بنانے کے لئے دوبارہ ترتیب دیجئے، پھر نیچے دے گئے سوالوں کے جواب دیجئے

P. بندر نے کیک کو دو حصّوں میں تکسیم کیا لیکن یے کہکر اپنا سر ہلایا کہ دونو برابر نہی ہے.
Q. دعوت کے بعد، دو بلليوں نے کیک کہ ٹکڑا دیکھا اور اسکے لئے لڑنا شرو کیا.
R. وو یہ لگاتار کرنے لگا جب تک کچھ کیک نہی بچا،اور بیچاری چھوٹی بلليوں کو مایوس کیا.
S. ایک بندر کو یہ فائدہ اٹھانے کہ موکا لگا اور مدد کی پیشکش کی.
T. اسنے ایک کو دانت سے کاٹا اور پھر دوسرے کو، لیکن پھر بھی چھوٹا بڑا پایا.

دوبارہ ترییب دینے کے بعد کون سا جملہ پانچوہ ہونا چاہیے؟

A.R
A.R
A.R

B.P
B.P
B.P

C.Q
C.Q
C.Q

D.T
D.T
D.T

Answer: A.R
A.R
A.R

178 चित्रामधील एका स्त्रीकडे बोट दाखवून, राजीव म्हणतो, “तिच्या आईला एकुलता नातू आहे ज्याची आई माझी पत्नी आहे”. मग चित्रातील स्त्रीचे राजीवसोबत नाते काय?

Pointing to the woman in the picture, Rajiv said, “Her mother has only one grandchild whose mother is my wife”. How is the woman in the picture related to Rajiv?

تصویر میں عورت کو اشارہ کرتے ہوئے، راجیو نے کہا، "اس کی ماں کی صرف ایک پوتا/ پوتی ہے جس کی ماں میری بیوی ہے".
تصویر کی عورت کا راجیو سے کیا متعلق ہے؟

A.चुलत बहीण
A.Cousin
A.چچا زاد

B.पत्नी
B.Wife
B.بیوی

C.बहीण
C.Sister
C.بہن

D.माहिती अपुरी नाही
D.Data inadequate
D.ڈیٹا ناکافی

Answer: B.पत्नी
B.Wife
B.بیوی

179 खालीलपैकी उष्णतेचे उत्तम वाहक कोणते आहे —

The best conductor of heat among the following is —

مندرجہ ذیل میں سے گرمی کا سب سے بہتر کنڈکٹر کون ہے؟

A.अल्कोहोल
A.Alcohol
A.الکحل

B.चांदी
B.Silver
B.چاندی

C.इथर
C.Ether
C.ایتھر

D.पाणी
D.Water
D.پانی

Answer: B.चांदी
B.Silver
B.چاندی

180 सूचना : खालील प्रत्येक प्रश्नात दोन विधाने I आणि II दिलेले आहेत. हे विधान एकतर स्वतंत्र कारण असू शकतात किंवा स्वतंत्र कारणांचे परिणाम असू शकतात. यांपैकी एक विधान इतर विधानाचा परिणाम असू शकतो. दोन्ही विधाने वाचा आणि खालीलपैकी कोणत्या उत्तराचा पर्याय या दोन्ही विधानांमधील संबंधांचे वर्णन करतो ते ठरवा.

विधान :
I. गेल्या आठवड्यापासून X शहराच्या रिक्षा, टॅक्सी, बस आणि सर्वसाधारण वाहतुकीचे इतर माध्यम अनिश्चित काळासाठी संपावर गेलेले आहेत.
II. X शहरातील भाज्या आणि इतर खाद्यपदार्थांच्या किंमती वाढल्या आहेत.

DIRECTIONS: Below in each question are given two statements I and II. These statements may be either independent causes or may be effects of independent causes. One of these statements may be the effect of the other statement. Read both the statements and decide which of the following answer choice correctly depicts the relationship between these two statements.

Statements:
I. Rickshaw, taxi, bus and other means of general transportation of city X are on an indefinite strikesince last week.
II. The prices of vegetables and other food articles in city X have increased.

ہدایات: نیچے ہر سوال میں دو بیانات I اور II آ تو یہ بیانات یا ان دیے گئے ہیں۔ آزاد وجوہات یا پھر آزاد وجوہات کے اثرات ہو سکتے ہیں۔ بیانات میں سے ایک بیان دوسرے کا اثر ہو سکتا ہے۔دونوں بیانات پڑھیں اور فیصلہ کریں کہ نیچے دیے گئے کس جواب کا انتخاب ان دونوں بیانات کے در میان تعلق کو ٹھیک سے ظاہر کرتا ہے۔

بیانات:
I –X شہر کے رکشہ، ٹیکسی، بس اور جنرل ٹرانسپورٹ پچھلے ہفتے سے غیر معینہ مدت تک ہڑتال پر ہیں۔
II - X شہر میں سبزیوں اور کھانے پینے کی دیگر اشیاء کی قیمتوں میں اضافہ ہوا ہے۔

A.I हा परिणाम आहे आणि II हे त्याचे तात्काळ आणि प्रमुख कारण आहे;
A.I is effect and II is its immediate and principal cause;
A.بیان نمبر I اس کی فوری اور بنیادی وجہ ہے۔ II اثر ہے اور بیان نمبر

B.I हे तात्काळ आणि प्रमुख कारण आहे आणि II हा त्याचा परिणाम आहे;
B.I is the immediate and principal cause and II its effect;
B.بیان نمبر I اس کا اثر ہے۔ II فوری اور بنیادی وجہ ہے اور بیان نمبر

C.I हा परिणाम आहे परंतु II हे त्याचे तात्काळ आणि प्रमुख कारण नाही;
C.I is an effect but II is not its immediate and principal cause;
C.بیان نمبر I اس کی فوری اور بنیادی وجہ نہیں ہے۔ II اثر ہے لیکن بیان نمبر

D.II हा परिणाम आहे परंतु I हे त्याचे तात्काळ आणि प्रमुख कारण नाही;
D.II is an effect but I is not its immediate and principal cause;
D.بیان نمبر II اس کی فوری اور بنیادی وجہ نہیں ہے۔ I اثر ہے لیکن بیان نمبر

Answer: B.I हे तात्काळ आणि प्रमुख कारण आहे आणि II हा त्याचा परिणाम आहे;
B.I is the immediate and principal cause and II its effect;
B.بیان نمبر I اس کا اثر ہے۔ II فوری اور بنیادی وجہ ہے اور بیان نمبر

181 खालीलपैकी शुद्ध वाक्य कोणते ?

A.उद्याला आपल्याला जंगलात फिरायला जायचे आहे.

B.उद्या आपल्याला जंगलात फिरायला जायचे आहे.

C.उद्या आपल्याला जंगलात फिरायला जायाचं आहे.

D.उद्या आपल्याला जंगलामधी फिरायला जायचे आहे.

Answer: B.उद्या आपल्याला जंगलात फिरायला जायचे आहे.

182 खालीलपैकी स्त्रीलिंगी शब्द ओळखा.

A.मैत्री

B.मैत्रीण

C.मित्रता

D.यापैकी सर्व

Answer: D.यापैकी सर्व

183 खालीलपैकी कोणते रेषे फुलांच्या चेंडूपासून मिळतात?

Which of the following fibres are obtained from balls of flowers?

مندرجہ ذیل میں سے کونسا فائبر پھول کے گولوں سے حاصل کیا جاتا ہے؟

A.सुतळी
A.Jute
A.جوٹ

B.कापुस
B.Cotton
B.کپاس

C.जवस
C.Flax
C.سن

D.रेशीम
D.Silk
D.ریشم

Answer: B.कापुस
B.Cotton
B.کپاس

184 खालीलपैकी शुद्ध शब्द कोणता ?

A.ओपचारिक

B.ओपचारीक

C.औपचारिक

D.औपचारीक

Answer: C.औपचारिक

185 सूचना: खालील प्रश्नांमध्ये दिलेल्या पर्यायांमधून संबंधित अक्षर/शब्द/संख्या निवडा.

जानेवारी: महिना :: बुधवार

DIRECTIONS: In the following question, select the related letter/word/number from the given alternatives.

January: Month :: Wednesday

سمت: مندرجہ ذیل سوال میں، دیے گئے متبادل سے متعلقہ حرف/لفظ/نمبر منتخب کریں۔

جنوری: مہینہ :: بدھ

A.दिवस
A.Day
A.دن

B.वर्ष
B.Year
B.سال

C.तास
C.Hour
C.گھنٹہ

D.वेळ
D.Time
D.وقت

Answer: A.दिवस
A.Day
A.دن

186 दिलेली अदलाबदल : चिन्हे – आणि +, तसेच आकडे 3 आणि 5 ; तर 3 + 8 ÷ 4 x 2– 5 चे मूल्य किती ?

Given interchanges: signs - and ×, and numbers 3 and 5; then the value of 3+ 8 ÷ 4 × 2 - 5 is

دیئے گئے تبادلے: علامات - اور ×، اور نمبر 3 اور 5؛ تو 3+ 8÷4×2 - 5کی تعداد ہے

A.1
A.1
A.1

B.-1
B.-1
B.-1

C.2
C.2
C.2

D.-2
D.-2
D.-2

Answer: A.1
A.1
A.1

187 समजा आपले घरमालक खूप आजारी आहेत, आपण शिक्षक असल्यामुळे ते आपला आदर करतात, अश्या परिस्थितीत आपण कोणते कर्तव्य पार पाडू?

Suppose your landlord becomes very ill, he gives you respect due to your profession as a teacher, what duties will you perform under this condition?

فرض کریں کہ آپ کا مالک مکان بہت بیمار ہو جائے،وہ استاد کے پیشہ کی وجہ سے آپ کا احترام کرتا ہے، آپ اس حالت میں کیا کام کریں گے؟

A.अश्या कठीण प्रसंगी त्यांना आराम मिळावा म्हणून आपण शक्यतो सर्व प्रकारची मदत करून आपला सर्वोत्कृष्ठ स्वभाव दाखवू
A.You extend all sorts of help to give them comfort in such a difficult time and prove your excellent behavior
A.اس کو اس طرح کے مشکل وقت میں آرام دینے اور اپنے بہترین رویے کو ثابت کرنے کے لئے ہر قسم کی مدد کی پیشکش

B.आपण फक्त आपला औपचारिक संबंध पाळणार
B.You follow only formal relations
B.آپ صرف رسمی تعلقات کی پیروی کرتے ہیں

C.फक्त नात्यांची गंभीरता लक्षात घेऊन आपण ह्या नात्याचे कर्तव्य पार पाडणार
C.You perform duties only in relation to the depth of relations
C.آپ تعلقات میں صرف تعلقات کی گہرائی سے متعلق فرائض انجام دیتے ہیں

D.आपण त्यांच्या त्वरित स्वास्थासाठी देवाकडे प्रार्थना करणार
D.You pray to god for his quick recovery.
D.آپ اسکی فوری صحت کے لئے خدا سے دعا کرتے ہیں.

Answer: A.अश्या कठीण प्रसंगी त्यांना आराम मिळावा म्हणून आपण शक्यतो सर्व प्रकारची मदत करून आपला सर्वोत्कृष्ठ स्वभाव दाखवू
A.You extend all sorts of help to give them comfort in such a difficult time and prove your excellent behavior
A.اس کو اس طرح کے مشکل وقت میں آرام دینے اور اپنے بہترین رویے کو ثابت کرنے کے لئے ہر قسم کی مدد کی پیشکش

188 आपला सहकारी प्राचार्याच्या सहाय्याने आपल्याला सेवेत निष्काळजीपणा दाखवल्यासाठी जाव्यात अडकवत आहे, आपण त्याच्याशी कसे वागणार?

Your colleague entangles you in the act of negligence of duties with the help of principal, how would you behave with him?

آپ کا ساتھی آپ کو پرنسپل کی مدد سے فرائض کی غفلت کے جرم میں شامل کرتا ہے، آپ اس کے ساتھ کیسے سلوک کریں گے؟

A.बदला घेणार व त्याला शारीरिक आणि मानसिक धक्का देणार
A.Revengeful and will give physical and mental shock to him
A.بدلہ لینے والا اور جو اسے جسمانی اور ذہنی جھٹکا دے گا

B.आपण त्याला दुर्लक्ष करणार
B.You will neglect him
B.آپ اسے نظرانداز کریں گے

C.आपण सहकार्यांमध्ये त्याचा अपमान करणार
C.You will insult him among the colleagues
C.آپ اس کے ساتھیوں کے درمیان اس کی توہین کریں گے

D.आपण स्वत: सतर्क राहू व त्याची मेहनत वाया घालू
D.You will keep yourself alert and make his efforts unfruitful.
D.آپ اپنے آپ کو خبردار رکھتے ہیں اور اسکی کوششوں کو رائیگاں بنائیں گے.

Answer: D.आपण स्वत: सतर्क राहू व त्याची मेहनत वाया घालू
D.You will keep yourself alert and make his efforts unfruitful.
D.آپ اپنے آپ کو خبردار رکھتے ہیں اور اسکی کوششوں کو رائیگاں بنائیں گے.

189 सूचना: इथे दिलेले प्रश्न खालील आकृतींवर आधारित आहेत. आकृतींचा अभ्यास करा आणि दिलेल्या प्रश्नांमधील शब्द आणि संकल्पनांशी त्यांचा संबंध लावा.
यापैकी कोणत्या आकृतीमध्ये भाषा, ओडीया आणि ऊर्दू यांच्या दरम्यानचे नाते अचूकपणे व्यक्त केले आहे?

DIRECTIONS: Questions here are based on the following figures. Study the figures and relate them to the terms and concepts given in questions.
Which of the following figure correctly expresses the relationship between Language, Oriya and Urdu?

ہدایات: یہاں سوالات مندرجہ ذیل تصاویر پر مبنی ہیں. تصاویر کا مطالعہ کریں اور سوالات میں دی گئی شرائط اور تصورات کو اس سے ملایئں .
مندرجہ ذیل میں سے کون سی ڈایاگرام زبان، اوریا اور اردو کے درمیان تعلقات کو صحیح طریقے سے بیان کرتی ہے؟

(A) 

(B) 

For More Info And Videos About TAIT-Exam Syllabus And Other Exam Visit My Channel
TAIT च्या 30 प्रश्नपत्रिका PDF
BADSHAHimp Available Request 9765226781
WWW.YouTube.com/BADSHAHimp
Subscribe My Channel

(C) 

(D) 

Answer: (A) 

190 "पॉव्हर्टी ॲन्ड अन-ब्रिटीश रुल इन इंडिया" हे पुस्तक कोणी लिहिले?

Who had written the book “Poverty & Un- British Rule in India”?

پاورٹی اینڈ ان برٹش رول ان انڈیا کے مصنف ہیں۔

A.राजा राम मोहन रॉय
A.Raja Rammohan Roy
A.راجا رام موہن رائے

B.बंकिम चंद्र
B.Bankim Chandra
B.بنکم چندر

C.दादाभाई नौरोजी
C.Dadabhai Naoroji
C.دادا بھائی نوروجی

D.व्ही. डी. सावरकर
D.V.D. Savarkar
D.وی ڈی ساورکر

Answer: C.दादाभाई नौरोजी
C.Dadabhai Naoroji
C.دادا بھائی نوروجی

191 माझ्या वडीलांनी रु. 280 अशाप्रकारे वितरीत केले की प्रत्येक मुलीला रु. 20 आणि प्रत्येक मुलाला रु. 10 मिळतील. जर मुलांची संख्या ही मुलींच्या संख्येपेक्षा 2 ने कमी असेल, तर मुलांची संख्या काढा?

My father distributed Rs.280 in such a way that each girl received Rs.20 and each boy Rs.10. If the number of boys is less than that of girls by 2, find the number of boys?

میرے والد نے اس طرح سے 280 روپے تقسیم کیے کہ ہر لڑکی کو 20 روپے اور ہر لڑکے کو 10 ملے. اگر لڑکوں کی تعداد لڑکیوں سے 2 عدد کم ہے تو، لڑکوں کی تعداد معلوم کریں؟

For More Info And Videos About TAIT-Exam Syllabus And Other Exam Visit My Channel
TAIT च्या 30 प्रश्नपत्रिका PDF
BADSHAHimp Available Request 9765226781
WWW.YouTube.com/BADSHAHimp
Subscribe My Channel

A.8
A.8
A.8

B.15
B.15
B.15

C.10
C.10
C.10

D.7
D.7
D.7

Answer: A.8
A.8
A.8

192 Out of the given four words only one is spelt correctly. Find the word that is correctly spelt.

A.Environment

B.Ignorence

C.Indispanseable

D.Hygene

Answer: A.Environment

193 एका रकमेवरील सरळ व्याज हे मुद्दलेच्या 1/25 आहे आणि वर्षांची संख्या ही प्रति वर्ष व्याजाच्या टक्क्याएवढी आहे. प्रति वर्ष व्याज दर काढा?

The simple interest on a sum of money is 1/25 of the principal and the number of years is equal to the rate percent per annum. Find the interest rate per annum?

ایک مبلغ رقم پر سود مفرد اصل کا 1/25 ہے اور سالوں کا عدد سالانہ فیصد در کے برابر ہے۔ سالانہ سود کا در معلوم کریں؟

A.1%
A.1%
A.1%

For More Info And Videos About TAIT-Exam Syllabus And Other Exam Visit My Channel
TAIT च्या 30 प्रश्नपत्रिका PDF
BADSHAHimp Available Request 9765226781
WWW.YouTube.com/BADSHAHimp
Subscribe My Channel

B.2%
B.2%
B.2%

C.3%
C.3%
C.3%

D.4%
D.4%
D.4%

Answer: B.2%
B.2%
B.2%

194 सूचना: खाली दिलेल्या विधान (A) आणि कारण (R) साठी, खालील पैकी योग्य पर्याय निवडा:

विधान (A): अंड्यातील पिवळ बलक आणि यकृत खाणे अशक्तपणाचे प्रकरण हाताळण्यात मदत करते.
कारण (R): अंड्यातील पिवळ बलक आणि यकृत क्रोमियम मध्ये समृध्द असतात.

DIRECTION: For the Assertion (A) and Reason (R) given below, choose the correct alternative from the following:

Assertion (A): Eating egg yolks and liver helps in tackling cases of anaemia.
Reason (R): Egg yolks and liver are rich in chromium.

ہدایت: نیچے دئیے گئے اسرشن (A) اور (R) کے لئے، مندرجہ ذیل میں سے صحیح متبادل منتخب کریں:

اسرشن (A): انڈے کی زردی اور جگر (لیور) کو کھانے سے انیمیا (خون کی کمی) کے معاملات سے نمٹنے میں مدد ملتی ہے۔
وجہ (R): انڈے کی زردی اور جگر (لیور) میں بھرپور کرومیم پایا جاتا ہے۔

A.दोन्ही (A) आणि (R) सत्य आहेत आणि (R) (A) च योग्य स्पष्टीकरण आहे
A.Both (A) and (R) are true and (R) is the correct explanation of (A)
A. (A) اور (R) دونوں صحیح ہیں اور (R) (A) کی درست وضاحت ہے

B.दोन्ही (A) आणि (R) खरे आहेत, परंतु (R) (A) च योग्य स्पष्टीकरण नाही
B.Both (A) and (R) are true, but (R) is not the correct explanation of (A)
B. (A) اور (R) دونوں صحیح ہیں، لیکن (R) (A) کی درست وضاحت نہیں ہے

C.(A) सत्य आहे, परंतु (R) खोटे आहे
C.(A) is true, but (R) is false
C. (A) صحیح ہے، لیکن (R) غلط ہے

D.(A) खोटे आहे, परंतु (R) सत्य आहे
D.(A) is false, but (R) is true
D. (A) غلط ہے، لیکن (R) صحیح ہے

Answer: C.(A) सत्य आहे, परंतु (R) खोटे आहे
C.(A) is true, but (R) is false
C. (A) صحیح ہے، لیکن (R) غلط ہے

195 Out of the given options, choose the most appropriate one to fill in the blank.
The day after the explosion the death toll _____to 90.

A.had risen

B.had rise

C.have rise

D.has rise

Answer: A.had risen

196 $3^{2x^2}-2(3^{x^2+x+6})+3^{2(x+6)}=0$ समीकरण सोडवा:

Solve the equation $3^{2x^2}-2(3^{x^2+x+6})+3^{2(x+6)}=0$:

: $3^{2x^2}-2(3^{x^2+x+6})+3^{2(x+6)}=0$ مساوات کو حل کریں

A. {x = -3, -2}

B. {x = 3, 2}

C. {x = -3, 2}

D. {x = 3, -2}

Answer: D. {x = 3, -2}

197 Out of the given options, choose the one which is the correct indirect speech of the sentence given below.
“Please give me something to eat. I am hungry” the old man said to the boys.

A.The old man requests the boys to give him something to eat and said that he is hungry

B.The old man requests the boys to give him something to eat and said that he was hungry

C.The old man requested the boys to give him something to eat and says that he is being hungry

D.The old man requested the boys to give him something to eat and said that he was hungry

Answer: D.The old man requested the boys to give him something to eat and said that he was hungry

198 DIRECTIONS: A sentence with an underlined phrasal verb is given below. Out of the four options, choose the one which can be substituted for the given phrasal Verb.
The servant made away with ten thousand rupees.

A.stole

B.returned

C.safeguarded

D.reserved

Answer: A.stole

199 .....चा वापर घरातील खुर्च्या, टेबले इ. सामान तयार करण्यासाठी केला जातो

_____ is used for making furniture

فرنیچر بنانے کے لئے استعمال کیا جاتا ہے

A.कापूस
A.Cotton
A. کپاس

B.नेचा
B.Ferns
B. فرنس

C.लाकुड /इमारती लाकूड
C.Wood/ Timber
C. لکڑی / ٹمبر

D.नारळ वनस्पती
D.Coconut plant
D. ناریل پلانٹ

Answer: C.लाकुड /इमारती लाकूड
C.Wood/ Timber
C. لکڑی / ٹمبر

For More Info And Videos About TAIT-Exam Syllabus And Other Exam Visit My Channel
TAIT च्या 30 प्रश्नपत्रिका PDF
BADSHAHimp Available Request 9765226781
WWW.YouTube.com/BADSHAHimp
Subscribe My Channel

200	जॅकीचंद सिंह हे _____ या खेकाशी संबंधित आहेत Jackichand Singh is associated with – جیکی چند سنگھ جڑے ہوئے ہیں۔
	A.फुटबॉल A.Football A.فٹبال سے
	B.जुडो B.Judo B.جوڈو سے
	C.हॉकी C.Hockey C.ہاکی سے
	D.यांपैकी कोणतेही नाही D.None of these D.ان میں سے کوئی نہیں
Answer:	A.फुटबॉल A.Football A.فٹبال سے

For More Info And Videos About TAIT-Exam Syllabus And Other Exam Visit My Channel
TAIT च्या 30 प्रश्नपत्रिका PDF
BADSHAHimp Available Request 9765226781
WWW.YouTube.com/BADSHAHimp
Subscribe My Channel

Question Paper Title : TAIT_PAPER_19

Date of Exam : 2017-12-20 12:30:00.0

1	बेलग्रेड ही _____ ची राजधानी आहे Belgrade is the Capital of - بالگریڈ راجدھانی ہے :
	A.सेशल्स A.Seychelles A.سی شیلس
	B.रवांडा B.Rwanda B.روانڈا
	C.सर्बिया C.Serbia C. سربیا
	D.पेरू D.Peru D.پیرو
Answer:	C.सर्बिया C.Serbia C. سربیا
2	11 × 13 × 17 = ? 11 × 13 × 17 = ? 11 × 13 × 17 = ?
	A.2431 A.2431 A.2431
	B.2441 B.2441 B.2441

For More Info And Videos About TAIT-Exam Syllabus And Other Exam Visit My Channel
TAIT च्या 30 प्रश्नपत्रिका PDF
BADSHAHimp Available Request 9765226781
WWW.YouTube.com/BADSHAHimp
Subscribe My Channel

C.2531
C.2531
C.2531

D.2521
D.2521
D.2521

Answer: A.2431
A.2431
A.2431

3 **सूचना**: खालील प्रश्नात एकाच फाशाच्या चार अवस्था दाखविल्या आहेत. प्रश्नात विचारलेल्या चिन्हाच्या विरुद्ध बाजूला कोणते चिन्ह असेल?

DIRECTIONS: In the following questions four positions of the same dice are shown. Select the symbol opposite to the symbol as asked in the question.

ہدایات: نیچے کے سوالوں میں، ایک ہی پاسہ کی چار حالتیں دکھائی گئ ہیں اس علامت کو چنئے جو سوال میں پو چھی گئ علامت کے سامنے ہے۔

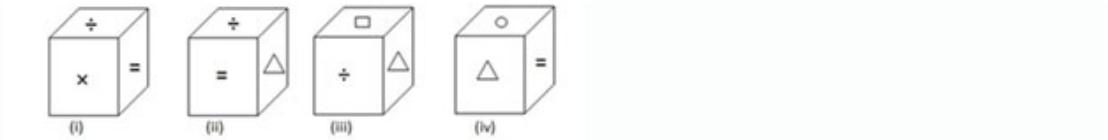

○ या चिन्हाच्या विरुद्ध बाजूला कोणते चिन्ह असेल?
Which symbol will be opposite to symbol ○ ?
کونسا نشان O نشان کی ضد ہوگی؟

A. ÷

B. =

C. ×

D. Δ

Answer: A. ÷

For More Info And Videos About TAIT-Exam Syllabus And Other Exam Visit My Channel
TAIT च्या 30 प्रश्नपत्रिका PDF
BADSHAHimp Available Request 9765226781
WWW.YouTube.com/BADSHAHimp
Subscribe My Channel

4

खालील प्रश्नात एक आकृतिबंध दाखविला आहे आणि तो कळीची आकृती म्हणून नोंदला आहे. कागदाच्या मागच्या बाजूने बघितल्यास मूळची कळीची आकृती अचूकपणे कशी दिसेल हे तुम्हाला ठरवायचे आहे.

DIRECTIONS: In the following questions, a design is given, marked as key figure. You have to determine which will be the exact view of the original key figure seen from the reverse side of the paper.

ہدایات: نیچے کے سوال میں نقش دیا گیا ہے، جس پر اہم شکل کا نشان لگا ہے آپ کو یہ طے کرنا ہے کہ اہم شکل کا قطعی منظر کاغذ کی الٹی طرف سے کونسا ہوگا؟

मुख्य आकृती
Main Figure
اصل شکل



(A) 

(B) 

(C) 

(D) 

Answer:

(A) 

5

भारताचे कोळसामंत्री कोण आहेत?

Who is the Minister of Coal in India?

بھارت کے کوئلہ منسٹر ہیں :

A.राव इंद्रजित सिंह
A.Rao Inderjit Singh
A.رائو اندرجیت سنگھ

For More Info And Videos About TAIT-Exam Syllabus And Other Exam Visit My Channel
TAIT च्या 30 प्रश्नपत्रिका PDF
BADSHAHimp Available Request 9765226781
WWW.YouTube.com/BADSHAHimp
Subscribe My Channel

	B.पीयूष गोयल B.Piyush Goyal B.پیوش گوئل
	C.सुरेश प्रभू C.Suresh Prabhu C.سریش پربھو
	D.यांपैकी कोणतेही नाही D.None of these D.انمیں سے کوئی نہیں
Answer:	B.पीयूष गोयल B.Piyush Goyal B.پیوش گوئل
6	DIRECTIONS: A sentence with an underlined phrasal verb is given below. Out of the four options, choose the one which can be substituted for the given phrasal Verb. New rules have been laid down to deal with tax evaders.
	A.vacated
	B.escaped
	C.deleted
	D.specified
Answer:	D.specified
7	DIRECTIONS: A sentence with an underlined phrasal verb is given below. Out of the four options, choose the one which can be substituted for the given phrasal Verb. You shouldn't bring up the topic of his son’s inter caste marriage while you are having a chat with him.
	A.introduce into discussion
	B.delete
	C.forget
	D.eliminate
Answer:	A.introduce into discussion

For More Info And Videos About TAIT-Exam Syllabus And Other Exam Visit My Channel
TAIT च्या 30 प्रश्नपत्रिका PDF Available Request 9765226781
BADSHAHimp
WWW.YouTube.com/BADSHAHimp
Subscribe My Channel

8 सूचना : खालील प्रत्येक प्रश्नात दोन विधाने I आणि II दिलेले आहेत. हे विधान एकतर स्वतंत्र कारण असू शकतात किंवा स्वतंत्र कारणांचे परिणाम असू शकतात. यांपैकी एक विधान इतर विधानाचा परिणाम असू शकतो. दोन्ही विधाने वाचा आणि खालीलपैकी कोणत्या उत्तराचा पर्याय या दोन्ही विधानांमधील संबंधांचे वर्णन करतो ते ठरवा.

विधान :
I. ग्रामीण भारतातील महिलांवरील हिंसाचाराचे प्रमाण वाढत आहे.
II. ग्रामीण भारतातील पुरुषांमध्ये दारू पिण्याचे प्रमाण वाढत आहे.

DIRECTIONS: Below in each question are given two statements I and II. These statements may be either independent causes or may be effects of independent causes. One of these statements may be the effect of the other statement. Read both the statements and decide which of the following answer choice correctly depicts the relationship between these two statements.

Statements:
I. Cases of domestic violence against women are increasing in rural India.
II. Alcohol consumption among men is increasing in rural India.

ہدایات: نیچے ہر سوال میں دو بیانات I اور II آزاد وجوہات یا پھر آزاد وجوہات کے اثرات ہو سکتے ہیں۔ یہ بیانات یا تو آ ان دیے گئے ہیں۔ دونوں بیانات پڑھیں اور فیصلہ کریں کہ نیچے دیے گئے کس جواب کا انتخاب ان بیانات میں سے ایک بیان دوسرے کا اثر ہو سکتا ہے۔ دونوں بیانات کے در میان تعلق کو ٹھیک سے ظاہر کرتا ہے۔

بیانات:
I – انڈیا کے دیہی علاقوں میں خواتین پر گھریلو تشدد کے واقعات میں اضافہ ہورہا ہے۔
II ۔ انڈیا کے دیہی علاقوں میں مردوں میں شراب نوشی میں اضافہ ہو رہا ہے۔

A.विधान I कारण आहे आणि विधान II त्याचा परिणाम आहे;
A.Statement I is the cause and statement II is its effect;
A. بیان نمبر I وجہ ہے اور بیان نمبر II اس کا اثر ہے۔

B.विधान II कारण आहे आणि विधान I त्याचा परिणाम आहे;
B.Statement II is the cause and statement I is its effect;
B.بیان نمبر II وجہ ہے اور بیان نمبر I اس کا اثر ہے۔

C.विधान I आणि II दोन्ही स्वतंत्र कारणे आहेत;
C.Both the statements I and II are independent causes;
C.دونوں بیانات نمبر I اور نمبر II آزاد وجوہات ہیں۔

D.विधान I आणि II दोन्ही स्वतंत्र कारणांचे परिणाम आहेत;
D.Both the statements I and II are effects of independent causes;
D.دونوں بیانات نمبر I اور نمبر II آزاد وجوہات کے اثرات ہیں۔

For More Info And Videos About TAIT-Exam Syllabus And Other Exam Visit My Channel
TAIT च्या 30 प्रश्नपत्रिका PDF
BADSHAHimp Available Request 9765226781
YouTube WWW.YouTube.com/BADSHAHimp
Subscribe My Channel

Answer:	B.विधान II कारण आहे आणि विधान I त्याचा परिणाम आहे; B.Statement II is the cause and statement I is its effect; B.بیان نمبر II وجہ ہے اور بیان نمبر I اس کا اثر ہے۔

9	खालीलपैकी शुद्ध शब्द कोणता ?
	A.कार्तीक्स्णन
	B.कर्तीक्स्णन
	C.कार्तिकस्नान
	D.कार्तीक्स्नन
Answer:	C.कार्तिकस्नान

10	Out of the given options, choose the one which is the correct active voice of the sentence given below. Are stories written by you?
	A.Do you write stories?
	B.Did you wrote stories?
	C.Have you written a stories?
	D.Is stories being written by you?
Answer:	A.Do you write stories?

11	विद्यार्थ्यांत प्रामाणिकपणाचा गुण ह्याने विकसित होऊ शकतो The trait of honesty in students can be developed through— طالب علموں میں ایمانداری کی خصوصیت کی ترقی کے ذریعے کی جا سکتی ہے۔
	A.अश्या मुलांच्या गटाला शाळेच्या सार्वजनिक ठिकाणी दंड देणे - A.Giving group punishment to such students in a school's public places like school assembly etc. A.اس طرح کے طالب علموں کو اسکول کی عوامی جگہوں پر سزا دینا مثلاً اسکول اسمبلی وغیرہ.

For More Info And Videos About TAIT-Exam Syllabus And Other Exam Visit My Channel
TAIT च्या 30 प्रश्नपत्रिका PDF
BADSHAHimp Available Request 9765226781
WWW.YouTube.com/BADSHAHimp
Subscribe My Channel

B.जगाच्या महान लोकांशी संबंधित कथा सांगून त्यांचे नैतिक मनोबल वाढविणे
B.Highlighting their morale by telling moral stories related to the greatmen of the world
B.دنیا کے عظیم انسانوں سے متعلق اخلاقی کہانیاں بتاتے ہوئے ان کے حوصلہ افزائی کا اظہار کرتے رہنا

C.आपल्या वैयक्तिक जीवनात चांगले आणि प्रामाणिक वागून मुलं समोर एक उदाहरण तयार करणे
C.Adopting all pious and honest measures in your personal life to create an example
C.اپنی ذاتی زندگی میں ایک مثال پیدا کرنے کے لئے تمام پر سکون اور ایماندار اقدامات کو اپنانا

D.त्यांच्या जीवनात चांगले गुण प्रदर्शित करणारे विद्यार्थ्यांना बक्षिसे देणे
D.Giving rewards to such students who have demonstrated this trait in their life
D.اس طرح کے طالب علموں کو انعام دینا جنہوں نے اپنی زندگی میں اس خاصیت کا مظاہرہ کیا ہے

Answer: C.आपल्या वैयक्तिक जीवनात चांगले आणि प्रामाणिक वागून मुलं समोर एक उदाहरण तयार करणे
C.Adopting all pious and honest measures in your personal life to create an example
C.اپنی ذاتی زندگی میں ایک مثال پیدا کرنے کے لئے تمام پر سکون اور ایماندار اقدامات کو اپنانا

12 निर्देश: खाली दिलेले प्रश्न वर्ण मालिकेवर आधारित आहेत. या प्रत्येक मालिकेत, काही अक्षरे गहाळ आहेत. योग्य पर्याय निवडा पाच पेक्षा अधिक अक्षरे गहाळ असल्यास, मालिकेतील शेवटचे पाच अक्षरे निवडा

A - - - EAB - D - B - - B -

DIRECTION: Questions given below are based on the letter series. In each of these series, some letters are missing. Select the correct alternative. If more than five letters are missing, select the last five letters of the series:

A - - - EAB - D - B - - B -

ہدایت نیچے دے ہے سوالات حرف سرج پر مشتمل ہیں . ہر میں کہیں حرف گمشدہ ہے . سہی اختیارات کو چنے . اگر پچ حرف گنمام ہو تو آخری پانچ حرفونکو چنے

A - - - EAB - D - B - - B -

A.BCDBA
A.BCDBA
A.BCDBA

B.BCDBE
B.BCDBE
B.BCDBE

C.BCABA
C.BCABA
C.BCABA

D.BCABC
D.BCABC
D.BCABC

For More Info And Videos About TAIT-Exam Syllabus And Other Exam Visit My Channel
TAIT च्या 30 प्रश्नपत्रिका PDF
BADSHAHimp Available Request 9765226781
WWW.YouTube.com/BADSHAHimp
Subscribe My Channel

Answer: C.BCABA
C.BCABA
C.BCABA

13 खलाशी, चित्रकार, वैमानिक हे याचे वरदान लाभलेले लोक आहेत

Sailors, Painters pilots, come under people who are blessed with

ملاح، پینٹر، پائلٹ ان لوگوں کے تحت آتے ہیں جنہیں اس ہنر سے نوازا گیا ہے

A.आंतर वैयक्तिक
A.Interpersonal
A. انٹرپرسنل

B.भाषिक बुद्धिमत्ता
B.Linguistic intelligence
B. زبانی ذہنیت

C.तार्किक बुद्धिमत्ता
C.Logical intelligence
C. منطقی ذہانت

D.अवकाशासंबंधी
D.spatial
D.مکانی قابلیت

Answer: D.अवकाशासंबंधी
D.spatial
D.مکانی قابلیت

14 **सूचना:** दिलेल्या चारांपैकी वेगळी (असंबद्ध) असणारी आकृती शोधून काढा.

DIRECTIONS: Find the odd figure from the given four figures.

ہدایات: دیئے گئے چار شکلوں میں سے طاق شکل کونسی ہے؟

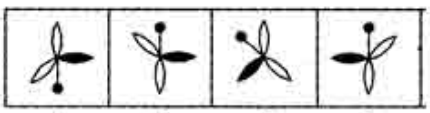

A. (A)

B. (B)

C. (C)

D. (D)

Answer: B. (B)

15 खालीलपैकी अशुद्ध वाक्य कोणते ?

A.त्याच्या सरबताची चवदार अजूनपण मला आठवते.

B.त्याला जवळच्या नात्यातलं असं कुणीही नव्हते.

C.त्याच्या काकाचे घर खूप मोठे होते.

D.त्याचे शिक्षण कितपत झाले माहित नाही.

Answer: A.त्याच्या सरबताची चवदार अजूनपण मला आठवते.

16 1 मी. चालल्यानंतर मीना डावीकडे वळली आणि आणखी 12 मी. चालली. पुन्हा ती डावीकडे वळली आणि 4 मी. चालली. आता ती पूर्व दिशेस प्रवास करत आहे. तिने आपला प्रवास कोणत्या दिशेस सुरु केला?

After walking for 1 m, Meena turned to her left and walked another 12 m. Again she turned to her left and walked for 4 m. Now she is travelling in East direction. In which direction did she start her journey?

1 میٹر تک چلنے کے بعد مینا اپنی بائیں جانب مڑجاتی ہے- اور مزید12 میٹر تک چلتی ہے- پھر سے وہ اپنی بائیں جانب مڑجاتی ہے اور 4 میٹر تک چلتی ہے- اب وہ مشرق کی جانب سفر کر رہی ہے- اس نے کس سمت میں اپنا سفر شروع کیا تھا؟

A.पश्चिम
A.West
A.مغرب

B.पूर्व
B.East
B.مشرق

C.उत्तर
C.North
C.شمال

D.दक्षिण
D.South
D.جنوب

For More Info And Videos About TAIT-Exam Syllabus And Other Exam Visit My Channel
TAIT च्या 30 प्रश्नपत्रिका PDF
BADSHAHimp Available Request 9765226781
YouTube WWW.YouTube.com/BADSHAHimp
Subscribe My Channel

Answer: A.पश्चिम
A.West
A.مغرب

17 निर्देश: खालील शब्दांची इंग्रजी शब्दकोशानुसार मांडणी करा.
शब्दकोशामधील मांडणीमध्ये कोणता शब्द चौथा येईल?
(a) Propense
(b) Prophet
(c) Prong
(d) Propine

DIRECTIONS: Arrange the following words according to the English Dictionary.
In dictionary, which word comes fourth in arrangement?

ہدایت: انگریزی لغت کے مطابق مندرجہ ذیل الفاظ کو مرتب کریں۔

لغت میں، ترتیب میں کونسا لفظ چوتھے پر آئیگا؟

A.Propense
A.Propense
A.Propense

B.Prophet
B.Prophet
B.Prophet

C.Prong
C.Prong
C.Prong

D.Propine
D.Propine
D.Propine

Answer: D.Propine
D.Propine
D.Propine

For More Info And Videos About TAIT-Exam Syllabus And Other Exam Visit My Channel
TAIT च्या 30 प्रश्नपत्रिका PDF
BADSHAHimp Available Request 9765226781
WWW.YouTube.com/BADSHAHimp
Subscribe My Channel

18 खालील आकृतीचा अभ्यास कार आणि दिलेल्या प्रत्येक प्रश्नाचे उत्तर द्या.

Study the diagram given below and answer each of the following questions.

مندرجہ ذیل دیئے گئے ڈایاگرام کا مطالعہ کریں اور مندرجہ ذیل سوالات کا جواب دیں.



चहा आणि वाईन घेणारे परंतु कॉफी न घेणारे किती लोक आहेत?

How many persons who take tea and wine but not coffee?

ان افراد کی تعداد کتنی ہے جو چائے اور شراب پیتے ہیں لیکن کوفی نہیں؟

A. 20

B. 17

C. 25

D. 15

Answer: B. 17

19 मुलांच्या रांगेत A डावीकडून 13 व्या क्रमांकावर तर उजवीकडून 17 व्या क्रमांकावर आहे. तर रांगेत एकूण किती मुले आहेत ?

In a row of children, A is 13th from the left and 17th from the right. How many children are there in the row?

بچھوں کی کتار میں، A بھانیں اور سے 13 وہ ہے ا دھانیں اور سے 17 وہ ہے. کتار میں کتنے بچھے ہے؟

A.30
A.30
A.30

B.29
B.29
B.29

C.32
C.32
C.32

D.28
D.28
D.28

For More Info And Videos About TAIT-Exam Syllabus And Other Exam Visit My Channel
TAIT च्या 30 प्रश्नपत्रिका PDF
BADSHAHimp Available Request 9765226781
WWW.YouTube.com/BADSHAHimp
Subscribe My Channel

Answer: B.29
B.29
B.29

20 जेव्हा मुलं आपल्या घरी आलेल्या नवीन आस्थापनांच्या उपस्थितीत आक्रमक वागतात, तेव्हा आपण अशा मुलाच्या पालकांना काय उपाय सुचवाल?

When a child exhibits aggressive behaviour in the presence of new-comers at home, what would you suggest to the parents of such a child in order to give some remedy?

جب بچہ گھر میں نئے آنے والے کی موجودگی میں جارحانہ رویہ اختیار کرتا ہے، تو آپ کو اس کے علاج کے لئے بچے کے والدین کو کیا تجویز دیں گے؟

A.पालकांनी मुलाच्या संगोपनाच्या वेळी मुलाकडे दुर्लक्ष केले त्या साठी त्यांना भोगावा
A.The parents have badly neglected the child during his upbringing, therefore they must pay for it
A.والدین نے اس کے پرورش کرنے کے دوران بچے کو بری طرح نظر انداز کیا ہے، لہذا انہیں اس کے لئے ادائیگی کرنا ضروری ہے

B.पालकांनी आपल्या मुलाच्या समस्येबद्दल जाणून घेण्याचा प्रयत्न केला पाहिजे आणि त्यानुसार काही उपाय करणे सुरू केले पाहिजे
B.The parents should attempt to know about their child's basic problem and begin some remedy accordingly
B.والدین کو اپنے بچے کی بنیادی مسئلہ کے بارے میں جاننے کی کوشش کرنا چاہئے اور اس کے مطابق کچھ علاج شروع کرنا چاہئے

C.आपल्या मुलाची समस्या खर्या अर्थाने सोडविण्यासाठी पालकांनी सल्लागारांचा सल्ला घ्यावा
C.The parents should consult a counsellor in order to remedy the child's problem in real sense
C.حقیقی انداز میں بچے کی مشکل کو حل کرنے کے لئے والدین کو ایک مشیر سے مشورہ کرنا چاہئے

D.आईवडिलांनी मुलाला अशा प्रकारचे वर्तणूक साठी दंड करावा, ह्याने हळूहळू मुल त्याचे वागण सुधारू शकेल
D.The parents should penalize the child for showing such a behaviour, gradually child may modify his behaviour
D.والدین کو ایسے رویے کے اظہار کے لئے بچے کو سزا دینا چاہئے، آہستہ آہستہ بچہ اپنے رویے میں تبدیلی کرسکتا ہے

Answer: B.पालकांनी आपल्या मुलाच्या समस्येबद्दल जाणून घेण्याचा प्रयत्न केला पाहिजे आणि त्यानुसार काही उपाय करणे सुरू केले पाहिजे
B.The parents should attempt to know about their child's basic problem and begin some remedy accordingly
B.والدین کو اپنے بچے کی بنیادی مسئلہ کے بارے میں جاننے کی کوشش کرنا چاہئے اور اس کے مطابق کچھ علاج شروع کرنا چاہئے

21 प्रमाणित उपलब्धी चाचणी (स्टॅण्डर्डाइज्ड अचिएव्हमेन्ट टेस्ट) ची खालीलपैकी एक मुख्य विशेषता आहे –

Which of the following is the main characteristics of a standardized Achievement Test?

معیاری اہلیت ٹیسٹ کی اہم خصوصیات مندرجہ ذیل میں سے کون سی ہیں؟

For More Info And Videos About TAIT-Exam Syllabus And Other Exam Visit My Channel
TAIT च्या 30 प्रश्नपत्रिका PDF Available Request 9765226781
BADSHAHimp
WWW.YouTube.com/BADSHAHimp
Subscribe My Channel

A.निष्पक्षता
A.Objectivity
A.مقصودیت

B.वैधता
B.Validity
B.اہلیت

C.विश्वसनीयता
C.Reliability
C.استحکام

D.वरील सर्व
D.All the above
D.مذکورہ تمام

Answer: D.वरील सर्व
D.All the above
D.مذکورہ تمام

22 'दांभिकपणा' या शब्दाचा विरुद्धार्थी शब्द कोणता ?

A.ढोंग

B.प्रामाणिकपणा

C.भोंदुगिरी

D.दंभ

Answer: B.प्रामाणिकपणा

23 हिना आणि मीना यांच्या मध्ये 4:5 या प्रमाणामध्ये 45 सफरचंदे वाटा.

Divide 45 apples between Heena and Meena in ratio of 4:5?

حنا اور مینا کے درمیان 45 سیب کو 4:5 کے تناسب میں تقسیم کریں؟

A.15, 30
A.15, 30
A.15, 30

B.5, 40
B.5, 40
B.5, 40

C.35, 10
C.35, 10
C.35, 10

D.20, 25
D.20, 25
D.20, 25

Answer: D.20, 25
D.20, 25
D.20, 25

24 दोन चौकोनांची क्षेत्रफळे ही 225 : 256 या गुणोत्तरात आहेत. त्यांच्या परिमितींचे गुणोत्तर काय असेल:

The areas of two squares are in the ratio 225 : 256. What is the ratio of their perimeters:

دو مربع کے رقبہ کا تناسب 225: 256 ہے۔ انکےاحاطہ کا تناسب کیا ہے؟

A.225:256
A.225:256
A.225:256

B.256:225
B.256:225
B.256:225

C.15:16
C.15:16
C.15:16

D.16:15
D.16:15
D.16:15

Answer: C.15:16
C.15:16
C.15:16

25 निर्देश: खालील मालिकेतील गहाळ संख्या शोधा.

5, 7, ..., 9, 7, 11, 8, 13

DIRECTION: Find the missing number in the following series.

5, 7, ..., 9, 7, 11, 8, 13

ہدایات: جیل کے سرج مے گمشدہ نمبر کھوجے .

5, 7, ..., 9, 7, 11, 8, 13

A.8
A.8
A.8

B.6
B.6
B.6

C.19
C.19
C.19

D.7
D.7
D.7

Answer: B.6
B.6
B.6

26 A हा B पेक्षा दुप्पट गतिमान आहे आणि B हा C पेक्षा तिप्पट गतिमान आहे. C द्वारे 1/2 तासांमध्ये पार झालेला प्रवास हा A द्वारे किती वेळात पार होईल _____.

A is twice as fast as B and B is thrice as fast as C. The journey covered by C in 1/2 hours will be covered by A in _____.

A،B سے دوگنا تیز رفتار ہے اور B، C سے تین گنا تیز رفتار ہے ، C نے 1/2گھنٹے میں طے کیا گیا سفر Aکی جانب سے کتنے وقت میں طے کرے گا۔

A.5 मिनिटे
A.5 minutes
A.5 منٹ

B.15 मिनिटे
B.15 minutes
B.15 منٹ

C.1 तास
C.1 hour
C.1 منٹ

D.1.5 तास
D.1.5 hours
D.1.5 منٹ

Answer: A.5 मिनिटे
A.5 minutes
A.5 منٹ

27 जर पेनाला पेन्सिल म्हटले, पेन्सिलला शार्पनर म्हटले, शार्पनरला खोडरबर म्हटले, खोडरबरला पट्टी म्हटले, पट्टीला भूमिती म्हटले. तर पेन्सिलला टोक करण्यासाठी खालीलपैकी काय वापरले जाते?

If pen is called pencil, pencil is called sharpener, sharpener is called eraser, eraser is called scale, scale is called geometry. Which of the following is used for sharp a pencil?

اگر قلم کو پنسل کہا جائے، پنسل کو قلم تراش، قلم تراش کو ربر، ربر کو میزان اور میزان کو علم ہندسہ (جیومیٹری) کہا جائے تو قلم تراشنے کے لیے مندرجہ ذیل میں سے کیا استعمال کیا جاتا ہے؟

A.पेन्सिल
A.Pencil
A.پنسل

B.शार्पनर
B.Sharpener
B.قلم تراش

C.खोडरबर
C.Eraser
C.ربر

D.भूमिती
D.Geometry
D.(جیومیٹری علم ہندسہ)

Answer: C.खोडरबर
C.Eraser
C.ربر

28 खालीलपैकी कोणत्या जोडी कार्टिलागिनस मास्यांमध्ये येतात?

Which one of the following pairs belongs to Cartilaginous Fish?

مندرجہ ذیل جوڑوں میں سے کس کا تعلق کرکری مچھلی سے ہے؟

A.शार्क आणि टुना
A.Shark and Tuna
A.شارک اور ٹونا

B.शार्क आणि स्टिंगरे
B.Shark and Stingray
B.شارک اور سٹنگرے

C.स्केट्स आणि हिल्सा
C.Skates and Hilsa
C.اسکیٹس اور ہیلسا

D.रे आणि ईल
D.Ray and Eel
D.رے اور ایل

Answer: B.शार्क आणि स्टिंगरे
B.Shark and Stingray
B.شارک اور سٹنگرے

29 'हेकेखोर' या शब्दाचा समानार्थी शब्द कोणता ?

A.समंजस

B.सुज्ञ

C.एककल्ली

D.समजूतदार

Answer: C.एककल्ली

30	या मालिकेतील मध्यक शोधा. 24, 6, 14 Find the median of the series: 24, 6, 14 دی ہوئی سیریز کا اوسط (میڈین) ہوگا 24, 6, 14
	A.13 A.13 A.13
	B.14 B.14 B.14
	C.15 C.15 C.15
	D.18 D.18 D.18
Answer:	B.14 B.14 B.14
31	जम्मू आणि काश्मिरचे विशिष्ट घटनात्मक स्थान आहे: Special constitutional position of Jammu & Kashmir is: 2. جموں و کشمیر کا خصوصی آئینی پوزیشن ہے:
	A.त्यांचे स्वत:चे संविधान आहे. A.It has its own constitution A. اس کا خود اپنا آئین ہے
	B.त्यांचे स्वत:चे संविधान नाही. B.It has not its constitution. B. اس کا خود اپنا آئین نہیں ہے
	C.ते भारतीय संविधानाच्या वर आहे. C.It is above Indian constitution C. یہ بھارتی آئین سے اوپر ہے

D.भारतीय कायदा लागू नाही.
D.Indian laws are not applicable.
D. بھارتی قوانین لاگو نہیں ہوتے ہیں.

Answer: A.त्यांचे स्वत:चे संविधान आहे.
A.It has its own constitution
A. اس کا خود اپنا آئین ہے

32 एका विशिष्ट सांकेतिक भाषेमध्ये, जर MYSTERY हा शब्द ZLFGREL असा कूटबध्द केला जात असेल, PURSUE हा शब्द त्या भाषेत कसा कूटबध्द केला जाईल?

In a certain code language, if the word MYSTERY is coded as ZLFGREL, then how is the word PURSUE coded in that language?

ایک مخصوص ضابطے کی زبان میں، اگر لفظ MYSTERY کو ZLFGREL لکھا جاتا ہے، تو اس زبان میں لفظ PURSUE کو کیسے لکھاجائیگا؟

A.KFIHFV
A.KFIHFV
A.KFIHFV

B.CHFEIR
B.CHFEIR
B.CHFEIR

C.CHEFHR
C.CHEFHR
C.CHEFHR

D.CHEGIR
D.CHEGIR
D.CHEGIR

Answer: C.CHEFHR
C.CHEFHR
C.CHEFHR

33 खालीलपैकी काय पृथ्वीच्या सर्वात जवळ आहे?

Which among the following is closest to Earth?

مندرجہ ذیل میں سے جو زمین کے قریب ہے؟

A.सुर्य
A.Sun
A. سورج

B.चंद्र
B.Moon
B. چاند

C.ध्रुवतारा
C.Pole Star
C. قطب ستارہ

D.शनी
D.Saturn
D. زحل

Answer: B.चंद्र
B.Moon
B. چاند

34 सरळ रूप द्या:
1575 + 2747 + 5399 – 2646 =?

Simplify:
1575 + 2747 + 5399 – 2646 =?

آسان بنائیں:
1575 + 2747 + 5399 – 2646= ?

A.7075
A.7075
A.7075

B.2541
B.2541
B.2541

C.1235
C.1235
C.1235

D.1245
D.1245
D.1245

Answer: A.7075
A.7075
A.7075

35 सूचना: खालील प्रश्नांमध्ये दिलेल्या पर्यायांमधून संबंधित अक्षर/शब्द/संख्या निवडा.

वीज : तार ::

DIRECTIONS: In the following question, select the related letter/word/number from the given alternatives.

ELECTRICITY: CABLE ::

سمت: مندرجہ ذیل سوال میں، دیے گئے متبادل سے متعلقہ حرف/لفظ/نمبر منتخب کریں۔

الیکٹریسٹی : کیبل ::

A.विमान: आकाश
A.Airplane: Sky
A.ہوائی جہاز: آسمان

B.उष्णता : अग्नी
B.Heat : Fire
B.گرمی : آگ

C.हवा : पंखा
C.Air: Fan
C.ہوا: پنکھا

D.पाणी : वाहिनी
D.Water: Pipe
D.پانی: پائپ

Answer: D.पाणी : वाहिनी
D.Water: Pipe
D.پانی: پائپ

36 झेब्रा क्रॉसिंगवरून चालतांना

While walking through the Zebra Crossing

زیبرا کراسنگ پر چلتے وقت

A.प्रथम उजवीकडे आणि नंतर डावीकडे पहावे.
A.First look towards right and then left.
A.پہلے دائیں جانب اور پھر بائیں جانب دیکھئے.

B.प्रथम सरळ पहा आणि मग उजवीकडे पहावे.
B.First look straight and then right
B.پہلے سامنے دیکھیں اور پھر دائیں جانب

C.प्रथम डावीकडे पहावे आणि मग उजवीकडे पहावे.
C.First look towards left then right
C.پہلے بائیں جانب اور پھردائیں جانب دیکھئے.

D.प्रथम सरळ पहावे मग डावीकडे पहावे.
D.First look straight and then left
D.پہلے سامنے دیکھیں اور پھر بائیں جانب

Answer: A.प्रथम उजवीकडे आणि नंतर डावीकडे पहावे.
A.First look towards right and then left.
A.پہلے دائیں جانب اور پھر بائیں جانب دیکھئے.

37 अनुवंशिकता ह्याच्याशी संबंधित आहे

Heredity is associated with—

میراث کا تعلق ہے—

A.आनुवंशिकता वाहक
A.Genes
A.موروثی جراثیم

B.भौतिक संरचना
B.Physical structure
B.جسمانی ساخت

C.मानसिक पातळी
C.Mental level
C.دماغی سطح

D.शरीरशास्त्र
D.Physiology
D.نفسیات

Answer: A.आनुवंशिकता वाहक
A.Genes
A.موروثی جراثیم

38	टीएटी याचे संक्षिप्त रुप आहे- TAT is a short form for تے اے تے ایک مختصر شکل ہے
	A.एपरसेपशन टेस्ट A.The Apperception test A.اپپرکپتیوں ٹیسٹ
	B.थॅमिटीक एपरसेपशन B.Thematic Apperception B.تھماٹک اپپرکپتیوں
	C.थॅमिटीकएप्टीटीट्युडटेस्ट C.Thematic Aptitude test C.تھماٹک اپتیندے ٹیسٹ
	D.त्रू एपरसेपशन टेस्ट D.True Apperception test D.ترے اپپرکپتیوں ٹیسٹ
Answer:	B.थॅमिटीक एपरसेपशन B.Thematic Apperception B.تھماٹک اپپرکپتیوں
39	मिथिला लोकचित्रकलेला म्हणतात Mithila Folk Painting’ is popularly known as متھیلا لوک پینٹنگ 'عام طور پر جانا جاتا ہے
	A.वारजेनी A.Warjli A. ورلی
	B.मंदाना B.Mandana B. مانڈنا
	C.मधुबनी C.Madhubani C. مدھوبنی
	D.अल्पना D.Alpana D.الپنا

Answer:	C.मधुबनी C.Madhubani C. مدھوبنی

40	बेरीबरी याच्या कमतरतेमुळे होतो Beriberi is due to deficiency of بیری بیری مرض کس چیز کی کمی سے ہوتا ہے؟
	A.जीवनसत्व –B6 A.Vitamin –B6 A.وٹامن –B6
	B.जीवनसत्व – B12 B.Vitamin – B12 B.وٹامن –B12
	C.जीवनसत्व – B2 C.Vitamin – B2 C.وٹامن –B2
	D.जीवनसत्व – B1 D.Vitamin – B1 D.وٹامن –B1
Answer:	D.जीवनसत्व – B1 D.Vitamin – B1 D.وٹامن –B1

41	$y^2 – 11x + 30 = 0$ या वर्गसमीकरणाची मुळे आहेत: The roots of the quadratic equation $y^2 – 11x + 30 = 0$ are: مربع مساوات کے روٹ $y^2 – 11x + 30 = 0$ ہیں:
	A.-6, -5 A.-6, -5 A.-6, -5
	B.6, 5 B.6, 5 B.6, 5

	C.7, 5 C.7, 5 C.7, 5
	D.8, 5 D.8, 5 D.8, 5
Answer:	B.6, 5 B.6, 5 B.6, 5

42	खालीलपैकी अशुद्ध शब्द कोणता ?
	A.चरितार्थ
	B.चलबीचल
	C.चविष्ट
	D.चहाडी
Answer:	B.चलबीचल

43 सूचना: अर्थपूर्ण परिच्छेद निर्माण करण्यासाठी, खाली दिलेली (P), (Q) (R), (S) आणि (T) ही पाच वाक्ये योग्य अनुक्रमाने पुनर्रचना करा; त्यांनतर खालील प्रश्नांची उत्तर द्या.

P. आपल्या नैराश्यातून मासा म्हणतो, "मी लहान असल्याने कृपया मला सोडून द्या आणि मी तुमच्या काही कामाचा नाही."
Q. शहाणा कोळी म्हणला," आतापर्यंत जो अस्तित्त्वात नव्हता त्याच्यासाठी माझा निश्चित फायदा मी सोडणार नाही."
R. एके दिवशी, तो फक्त एक छोटासा मासा पकडतो.
S. एकेकाळी एक कोळी होता, मासे पकडण्यावर त्याचा उदरनिर्वाह चालत असे.
T. मला पुन्हा नदीत सोडून दे आणि मी मोठा झाल्यानंतर मला पुन्हा पकड आणि जास्त पैसे कमव.

पुनर्रचना केल्यानंतर खालीलपैकी कोणते वाक्य पहिले असेल?

DIRECTION: Rearrange the following five sentences (P), (Q), (R), (S) and (T) in the proper sequence to form a meaningful paragraph; then answer the questions given below them.
P. The fish, in its desperation to live, said “Please leave me as I am small and of no use to you.
Q. The wise fisherman replied, “I will not give up a certain profit for one that doesn’t exist yet.”
R. One day, he was able to catch only one small fish.
S. There was once a fisherman whose livelihood depended on his catching of fish.
T. Let me back into the river so that you can catch me again and make more money when I grow bigger.”

Which of the following should be the FIRST sentence after rearrangement?

ہدایات: ان پانچ جملوں (P)، (Q)، (R)، (S) اور (T) کو با معنی پیرا بنانے کے لئے دوبارہ ترتیب دیجئے، پھر نیچے دے گئے سوالوں کے جواب دیجئے

P. مچھلی نے زندہ رہنے کی چاہت میں کہا "مہربانی کر کے مجھے چھوڈ دو کیوں کہ امن چھوٹی ہوں اور آپکے کسی کام کی نہیں ہوں.
Q. عقل مند مچھوارے نے جواب دیا، "جو ابھی پیدا نہی ہوا میں اسکے بدلے مقرر نفع نہی کھو دونگا.
R. ایک دن، وو خالی ایک چھوٹی مچھلی پکڑنے میں کامیاب ہوا.
S. ایک بار ایک مچھوارہ تھا جسکی روزی مچھلی پکڑنے پر دارمدار تھا.
T. مجھے دریا میں واپس ڈال دو تاکی تم مجھے دوبارہ پکڑو اور زیادہ پینسے بناؤ جب میں بڈی ہو جاؤنگی.

دوبارہ ترییب دینے کے بعد کون سا جملہ پہلے ہونا چاہیے؟

A.S
A.S
A.S

B.P
B.P
B.P

C.Q
C.Q
C.Q

D.T
D.T
D.T

Answer: A.S
A.S
A.S

44 निर्देश: मालिका पूर्ण करा

AE, FJ, KO, ?, UY

DIRECTION: Complete the series

AE, FJ, KO, ?, UY

ہدایت اس سرج کو مکمّل کرو

AE, FJ, KO, ?, UY

A.PT
A.PT
A.PT

B.PS
B.PS
B.PS

C.PU
C.PU
C.PU

D.PR
D.PR
D.PR

Answer: A.PT
A.PT
A.PT

45 ‘कृश’ या शब्दाचा समानार्थी शब्द कोणता ?

A.काटकुळा

B.स्थूल

C.सशक्त

D.कृमी

Answer: A.काटकुळा

46 तीन पाईप A, B आणि C हे एकत्रितरित्या एक टाकी 6 तासांत भरतात. 2 तास एकत्र काम केल्यानंतर C बंद केला गेला. A आणि B ने उरलेली टाकी 8 तासांत भरली. एकट्या पाईप C द्वारे टाकी भरण्यास लागणारी वेळ:

Three pipes A, B and C together can fill a cistern in 6 hours. After working together for 2 hours, C is closed. A and B fill the remaining cistern in 8 hours. The time in which the cistern can be filled by pipe C alone will be:

تین پائپ A ، B اور C مل کر ایک ٹنکی کو 6 گھنٹوں میں بھر سکتے ہیں۔2 گھنٹے مل کر کر کام کرنے کے بعد C بند ہو گیا ۔ A اور B باقی ٹنکی کو 8 گھنٹوں میں بھر سکتے ہیں۔ پائپ C مل کر باقی ٹنکی کو اکیلے بھر نے کے لیے؟ اِس ٹنکی کو کتنا وقت درکار ہو گا

A.11 तास
A.11 hours
A.11گھنٹے

B.9 तास
B.9 hours
B.9گھنٹے

C.12 तास
C.12 hours
C.12گھنٹے

D.10 तास
D.10 hours
D.10گھنٹے

Answer: C.12 तास
C.12 hours
C.12گھنٹے

47 कोणता देश युरोप आणि आशिया दोन्हींमध्ये पडतो?

Which country falls in Europe & Asia both?

کونسا ملک یورپ اور ایشیا دونوں میں آتا ہے :

A.फ्रान्स
A.France
A.فرانس

B.ग्रीस
B.Greece
B.گریس

C.बेल्जियम
C.Belgium
C.بیلجیم

D.रशिया
D.Russia
D.روس

Answer: D.रशिया
D.Russia
D.روس

48 4.5% प्रति वर्ष सरळ व्याज या दराने रू. 450 या रकमेवर रू. 81 व्याज मिळवण्यासाठी किती वर्षे लागतील?

How much time will it take for an amount of Rs.450 to yield Rs.81 as interest at 4.5% per annum of simple interest?

81 روپیہ بحیثیت منافہ 4.5٪ کی در سے رقم 450 روپیہ پر ہونے میں کتنا وقت لگے گا؟

A.3.5 वर्षे
A.3.5 years
A. 3.5سال

B.4 वर्षे
B.4 years
B. 4سال

C.4.5 वर्षे
C.4.5 years
C.4.5 سال

D.5 वर्षे
D.5 years
D.5سال

Answer: B.4 वर्षे
B.4 years
B. 4سال

49 एकत्रितपणाच्या जाणीवमुळे तयार केलेल्या समुहाला म्हणतात

A group is kept by the feeling of togetherness is called as

گروپ ’ معیت کے احساس کے ذریعہ قائم رہے تو اسے_____ کہتے ہیں۔‘

A.सामाजिकरण
A.Socialization
A.سماج کاری

B.काहीही असेल
B.Whenever
B.جب کبھی (Whenever)

C.मॉडलिंग
C.Modeling
C.موڈلنگ

D.संवाद
D.Interactions
D.باہمی اتصال ورابطہ

Answer: B.काहीही असेल
B.Whenever
B.جب کبھی (Whenever)

50 एका घनाला रंगवून किमान शक्य संख्येचे काप करून 80 लहान पण एकसारख्या तुकड्यांमध्ये कापले गेले आहे. तंतोतंतपणे रंगवलेले तीन चेहरे असलेले किती लहान तुकडे आहेत?

A cube is painted and cut into 80 smaller but identical pieces by making the minimum possible number of cuts.
How many smaller pieces have exactly three painted faces?

ایک کیوب کو ایک جیسے 80 ٹکڑوں میں رنگ دے کر کاٹا گیا ہے۔ کم سے کم ممکن کٹ لگاتے ہوئے, کتنے حتمی چھوٹے ٹکڑے ہوں گے جن کے 3 منہ رنگین ہوں گے؟

A.12
A.12
A.12

B.8
B.8
B.8

C.36
C.36
C.36

D.24
D.24
D.24

Answer: B.8
B.8
B.8

51 **सूचना:** दिलेल्या पर्यायांमधून श्रेणी पूर्ण करणारी योग्य आकृती निवडा.

DIRECTIONS: Complete the series by choosing right figure from the given choices.

ہدایات: دیئے گئے اختیارات میں صحیح شکل کا انتخاب کر کے سیریز کو مکمل کیجیئے۔

Problem Figures

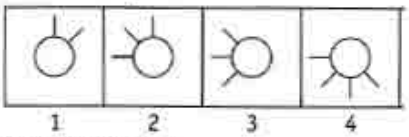

Answer Figures

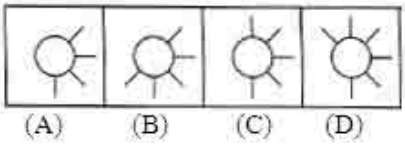

A. (A)

B. (B)

C. (C)

D. (D)

Answer: C. (C)

52 अनुक्रम: 5, 10, 15,…… चे 9वे पद शोधा

Find the 9th term of the sequence: 5, 10, 15,……

15 ,10 ,5 :؟ اس سرج کی نووی ٹرم کیا ہے,……

A.42
A.42
A.42

B.45
B.45
B.45

C.48
C.48
C.48

D.51
D.51
D.51

Answer: B.45
B.45
B.45

53 दिलेली अदलाबदल : चिन्हे - आणि ×, तसेच आकडे 9 आणि 15 ; तर 15 + 7 ÷ 7 × 4– 9 चे मूल्य किती ?

Given interchanges: signs - and ×, and numbers 9 and 15; then the value of 15 + 7 ÷ 7 × 4 - 9 is

دیئے گئے تبادلے: علامات - اور ×، اور نمبر 9اور 15؛ تو 15 + 7÷ 7× 4 - 9کی تعداد ہے

A.50
A.50
A.50

B.-50
B.-50
B.-50

C.40
C.40
C.40

D.-40
D.-40
D.-40

Answer: B.-50
B.-50
B.-50

54	सत्यजित रे हे प्रख्यात _____ होते Satyajit Ray was an eminent – ستیہ جیت رے ایک مشہور :
	A.लेखक A.Author A.مصنف ہیں
	B.चित्रपट दिग्दर्शक B.Film Director B.فلم ہدایت کار ہیں
	C.वरीलपैकी दोन्ही C.Both of the above C.اوپردئے ہوے دونوں
	D.यांपैकी कोणतेही नाही D.None of these D.انمیں سے کوئی نہیں
Answer:	C.वरीलपैकी दोन्ही C.Both of the above C.اوپردئے ہوے دونوں

55 सूचना: अर्थपूर्ण परिच्छेद निर्माण करण्यासाठी, खाली दिलेली (P), (Q) (R), (S) आणि (T) ही पाच वाक्ये योग्य अनुक्रमाने पुनर्रचना करा; त्यांनतर खालील प्रश्नांची उत्तर द्या.

P. आपल्या नैराश्यातून मासा म्हणतो, "मी लहान असल्याने कृपया मला सोडून द्या आणि मी तुमच्या काही कामाचा नाही."
Q. शहाणा कोळी म्हणला," आतापर्यंत जो अस्तित्त्वात नव्हता त्याच्यासाठी माझा निश्चित फायदा मी सोडणार नाही."
R. एके दिवशी, तो फक्त एक छोटासा मासा पकडतो.
S. एकेकाळी एक कोळी होता, मासे पकडण्यावर त्याचा उदरनिर्वाह चालत असे.
T. मला पुन्हा नदीत सोडून दे आणि मी मोठा झाल्यानंतर मला पुन्हा पकड आणि जास्त पैसे कमव.

पुनर्रचना केल्यानंतर खालीलपैकी कोणते वाक्य तिसरे असेल?

DIRECTION: Rearrange the following five sentences (P), (Q), (R), (S) and (T) in the proper sequence to form a meaningful paragraph; then answer the questions given below them.
P. The fish, in its desperation to live, said “Please leave me as I am small and of no use to you.
Q. The wise fisherman replied, “I will not give up a certain profit for one that doesn’t exist yet.”
R. One day, he was able to catch only one small fish.
S. There was once a fisherman whose livelihood depended on his catching of fish.
T. Let me back into the river so that you can catch me again and make more money when I grow bigger.”

Which of the following should be the THIRD sentence after rearrangement?

ہدایات: ان پانچ جملوں (P)، (Q)، (R)، (S) اور (T) کو با معنی پیرا بنانے کے لئے دوبارہ ترتیب دیجئے، پھر نیچے دے گئے سوالوں کے جواب دیجئے

P. مچھلی نے زندہ رہنے کی چاہت میں کہا "مہربانی کر کے مجھے چھوڈ دو کیوں کہ امن چھوٹی ہوں اور آپکے کسی کام کی نہیں ہوں.
Q. عقل مند مچھوارے نے جواب دیا، "جو ابھی پیدا نہی ہوا میں اسکے بدلے مقرر نفع نہی کھو دونگا.
R. ایک دن، وو خالی ایک چھوٹی مچھلی پکڑنے میں کامیاب ہوا.
S. ایک بار ایک مچھوارہ تھا جسکی روزی مچھلی پکڑنے پر دارمدار تھا.
T. مجھے دریا میں واپس ڈال دو تاکی تم مجھے دوبارہ پکڑو اور زیادہ پینسے بناؤ جب میں بڈی ہو جاؤنگی.

دوبارہ ترییب دینے کے بعد کون سا جملہ تیسرا ہونا چاہیے؟

A.P
A.P
A.P

B.Q
B.Q
B.Q

C.R
C.R
C.R

D.S
D.S
D.S

Answer: A.P
A.P
A.P

56

$$\sqrt{49} = ?$$

A. 2

B. 1

C. 7

D. 14

Answer: C. 7

57 भारतात कोणत्या एक्सप्रेसवेला राष्ट्रीय एक्सप्रेसवे1 म्हणून ओळखले जाते?

Which expressway is known as National expressway 1 in India?

کون سا ایکسپریس وے بھارت میں نیشنل ایکسپریس وے 1 کے طور پر جانا جاتا ہے؟

A.अहमदाबाद वडोदरा एक्सप्रेसवे
A.Ahmedabad Vadodara Expressway
A. احمد آباد وڈودرا ایکسپریس وے

B.दिल्ली जयपूर एक्सप्रेसवे
B.Delhi Jaipur Expressway
B. دہلی جے پور ایکسپریس وے

C.दिल्ली गुडगाव एक्सप्रेसवे
C.Delhi Gurgaon Expressway
C. دہلی گڑگاؤں ایکسپریس وے

D.वेस्टर्न एक्सप्रेसवे
D.Western Expressway
D. مغربی ایکسپریس وے

Answer: A.अहमदाबाद वडोदरा एक्सप्रेसवे
A.Ahmedabad Vadodara Expressway
A. احمد آباد وڈودرا ایکسپریس وے

58 A आणि B दांपत्य आहेत. X आणि Y भाऊ आहेत. A हा X चा भाऊ आहे. मग Y आणि B चे नाते काय?

A and B are a couple. X and Y are brothers. A is the brother of X. How is Y related to B?

A اور B جوڑی ہے. X وار Y بھائی بھائی ہے. X A کا بھائی ہے. Y کا B سے کیا رشتہ تھا؟

A.भाऊ
A.Brother
A.بھائی

B.जावई
B.Son-in-law
B.داماد

C.देवार
C.Brother-in-law
C.دیوار

D.मुलगा
D.Son
D.بیٹا

Answer: C.देवार
C.Brother-in-law
C.دیوار

59 ई-मेल पाठविताना, ही ओळ संदेशाची सामग्री वर्णन करते.

When sending an e-mail, the line describes the contents of the message -

ایک ای میل بھیجتے وقت، پیغام کے مواد کو بیان کرنے والی لائن ہے۔

A.विषय
A.Subject
A.سبجیکٹ

B.ला
B.To
B.ٹو

C.मजकूर
C.Contents
C.مواد

D.सिसि
D.CC
D.سی سی

Answer: A.विषय
A.Subject
A.سبجیکٹ

60 विधान:
भारताच्या राष्ट्रीय फूल अपमान वाढत आहेत. लोकांनी कमळाचे स्टेम खायला सुरुवात केली आहे.

कृतीचा कोर्स:
I. लोटस स्टेम खाल्लेल्या लोकांविरुद्ध कठोर कारवाई केली पाहीजे.
II. कमळांचा अपमान करणार्या लोकांना शिक्षा देण्यासाठी एक कायदा केला पाहिजे.

Statement:
Insults to national flower of India are increasing. People have started eating lotus stems.

Course of actions:
I. Strict action should be taken against people eating Lotus stems.
II. A law should be made to punish people insulting lotus

بیان:
انڈیا کے قومی پھول کی بے عزتی میں اضافہ ہو رہا ہے، لوگوں نے لوٹس کا تنا کھانا شروع کر دیا ہے۔

لائحہ عمل:
I۔ لوٹس کا تنا کھانے والے لوگوں کے خلاف سخت کاروائی کی جانی چاہیے۔
II۔ لوٹس کی بے عزتی کرنے والے لوگوں کو سزا دینے کے لیے قانون بنایا جانا چاہیے۔

A.फक्त I अनुसरून आहे
A.Only I follows
A. صرف I لاگو ہو گا۔

B.फक्त II अनुसरण करते आहे
B.Only II follows
B. صرف II لاگو ہو گا۔

C.एकतर I किंवा II अनुसरून आहे
C.Either I or II follows
C. I یا II میں سے ایک لاگو ہو گا۔

D.I किंवा II दोन्हीपैकी काहीही अनुसरण करत नाही
D.Neither I nor II follows
D. I اور II میں سے کوئی بھی لاگو نہیں ہو گا۔

Answer: D.I किंवा II दोन्हीपैकी काहीही अनुसरण करत नाही
D.Neither I nor II follows
D. I اور II میں سے کوئی بھی لاگو نہیں ہو گا۔

61	शंकू ही ----- आहे. A cone is a ----- کون (cone) ایک----------ہے
	A.समतल आकृती A.Plane figure A.سادہ شکل
	B.कंस B.Curve B.خم
	C.घन आकृती C.Solid Figure C.ٹھوس شکل
	D.यांपैकी कोणतेही नाही D.None of these D.کوئی نہیں
Answer:	C.घन आकृती C.Solid Figure C.ٹھوس شکل

62	दिलेल्या गटातील गहाळ संख्या निवडा. Select the missing number from, the given responses. نیچے کے سوال میں ، گمشدہ نمبر کھوجیے جو شرطیں پورا کرتا ہو . 
	A. 36
	B. 46
	C. 40
	D. 26
Answer:	A. 36

63 माउंट एव्हरेस्ट पृथ्वीचा सर्वात उच्च पर्वत आहे. त्याचे सर्वात उच्च टोक समुद्रीपातळीच्या ..... वर आहे.

Mt. Everest is the highest mountain on Earth, its peak reaches ..... above sea level.

ماؤنٹ ایورسٹ، زمین پر سب سے اونچا پہاڑ ہے اس کی چوٹی سطح سمندر سے.....اونچائی پر ہے۔

A.8848मी.
A.8848m
A.8848میٹر

B.18888 मी.
B.18888m
B.18888میٹر

C.8000 मी.
C.8000m
C. 8000میٹر

D.848 मी.
D.848m
D.848میٹر

Answer: A.8848मी.
A.8848m
A.8848میٹر

64 सूचनाः दिलेल्या पर्यायांमधून ऍनालॉगस शब्द निवडा.

अमीटरचा संबंध विद्युयत प्रवाहासोबत आहे जसा लॅक्टोमीटरचा संबंध ... सोबत आहे.

DIRECTIONS: Choose the analogous word from the given alternatives.

Ammeter is to Electric Current as Lactometer is to _____.

ہدایات: دیے گئے متبادل سے مطابق لفظ کا انتخاب کریں

. ام میٹر کا تعلق بجلی کے ساتھ ویسا ہی ہے جیسا کہ لاکتومیٹر کا ---------- کے ساتھ

A.पावसाचे प्रमाण
A.Amount of rain
A.بارش کی مقدار

B.दुधाची शुद्धता
B.Purity of Milk
B. دودھ کی پارسایی

	C.वायूंची घनता C.Density of Gases C. گسس کا گناپن
	D.उच्च तापमान D.High temperatures D.بلند حرارت
Answer:	B.दुधाची शुद्धता B.Purity of Milk B. دودھ کی پارسایی

65	तुलना करता येणार नाही असा -
	A.अतुलनीय
	B.अनमोल
	C.अगडबंब
	D.अतिसूक्ष्म
Answer:	A.अतुलनीय

66	DIRECTIONS: A sentence with an underlined word is given below. Find the Word which is most similar in meaning to the underlined word. The critical teacher was quick to censure her students for even small mistakes.
	A.Criticize
	B.Appreciate
	C.Inspire
	D.Encourage
Answer:	A.Criticize

67 प्राथमिक शालेय स्तरावर आधुनिक भारतीय शिक्षणाचे वर्णन खालील द्वारे उत्कृष्ट प्रकारे केले जाऊ शकते

Modern Indian education at the Elementary school level can best be described as being—

موڈیم ابتدائی اسکول کی سطح پر ہندوستانی تعلیم کو بہترین طور پر بیان کیا جا سکتا ہے—

A.अभ्यास-केंद्रीत
A.Curriculum-centred
A.نصاب کی مرکزیت پرمبنی

B.प्रकल्प-केंद्रित
B.Project-centred
B.پراجیکٹ کی مرکزیت پرمبنی

C.विद्यार्थी-केंद्रित
C.Pupil-centred
C.شاگرد کی مرکزیت پرمبنی

D.विषय-केंद्रित
D.Subject-centred
D.موضوع کی مرکزیت پرمبنی

Answer: C.विद्यार्थी-केंद्रित
C.Pupil-centred
C.شاگرد کی مرکزیت پرمبنی

68 समजा एक मूल त्याच्या भावंडांबरोबर आणि कौटुंबिक सदस्यां बरोबर भांडतो. आपण या वाईट सवय पासून त्याला सुटका करण्यासाठी काय करणार?

Suppose a child quarrels with his siblings and family-members. What will you do in order to get rid of him from this bad habit?

فرض کریں کہ ایک بچہ اپنے بھائیوں اور خاندان کے ارکان کے ساتھ جھگڑا کرتا ہے۔ اس بری عادت سے چھٹکارا دلانے کے لئے آپ کیا کریں گے؟

A.अशा वागणुकी साठी आपण शाळेच्या सभा भवनात सार्वजनिक शिक्षा जाहीर करू
A.You will declare public punishment for this act in school assembly
A.آپ اسکول اسمبلی میں اس عمل کے لئے عوامی سزا کا اعلان کریں گے

B.आपण शाळेच्या कोणत्याही भांडणात त्याला पकडण्याचा प्रयत्न कराल जेणेकरून तुम्हाला उघडपणे त्याचा अपमान करण्याची आणि त्याला नाकारण्याचा संधी मिळेल
B.You will try to search the chance to capture him in any school's quarrelling so that you will get an opportunity to dishonour and reject him openly
B.آپ کسی بھی اسکول کے جھگڑے میں اسے پکڑنے کا موقع ڈھونڈنے کی کوشش کریں گے تاکہ آپ اسے کھل کر بے عزت اور مسترد کرنے کا موقع پا سکیں

C.आपण अलगावशी त्याच्याशी बोलू शकता आणि अशा प्रकारचे वर्तन बद्दल तपशील विचारू
C.You will talk to him in isolation and ask in detail about such sort of behavior
C.آپ ان سے الگ تھلگ میں گفتگو کریں گے اور اس طرح کے رویے کے بارے میں تفصیل سے پوچھیں گے

D.आपण आपल्या वर्गातील काही इतर चांगले विद्यार्थी आणि ज्यांचा शाळेला अभिमानी आहे त्यांचीदेऊन उदाहरणे देऊन त्याला कमी लेखू शकता
D.You will demoralise him by giving the examples of some other good students of his class and the school on whom the school feel proud
D.آپ اس کی کلاس کے کچھ دوسرے اچھے طالب علموں اور اس اسکول پر جس پر اسکول فخر محسوس کرتے ہیں اس کی مثال کو دے کر ان کی حوصلہ شکنی کریں گے

Answer: C.आपण अलगावशी त्याच्याशी बोलू शकता आणि अशा प्रकारचे वर्तन बद्दल तपशील विचारू
C.You will talk to him in isolation and ask in detail about such sort of behavior
C.آپ ان سے الگ تھلگ میں گفتگو کریں گے اور اس طرح کے رویے کے بارے میں تفصیل سے پوچھیں گے

69 खालीलपैकी पुल्लिंगी शब्द ओळखा.

A.समीक्षण

B.समीक्षा

C.समीक्षक

D.समिती

Answer: C.समीक्षक

70 दिलेल्या शब्दामधून खालीलपैकी कोणता शब्द तयार केला जाऊ शकतो?
MULTIPLICATION

Which of the following word can be formed from the given word?
MULTIPLICATION

دیےگیے لفظ سے مندرجہ ذیل الفاظ میں سے کونسا بنایا جاسکتا ہے؟
‘MULTIPLICATION’

A.MUTUAL
A.MUTUAL
A.MUTUAL

B.LIMITATION
B.LIMITATION
B.LIMITATION

C.APPLICATION
C.APPLICATION
C.APPLICATION

D.NOTION
D.NOTION
D.NOTION

Answer: B.LIMITATION
B.LIMITATION
B.LIMITATION

71 **सूचना:** दिलेल्या पर्यायांमधून श्रेणी पूर्ण करणारी योग्य आकृती निवडा.

DIRECTIONS: Complete the series by choosing right figure from the given choices.

ہدایات: دیئے گئے اختیارات میں صحیح شکل کا انتخاب کر کے سیریز کو مکمل کیجیئے۔

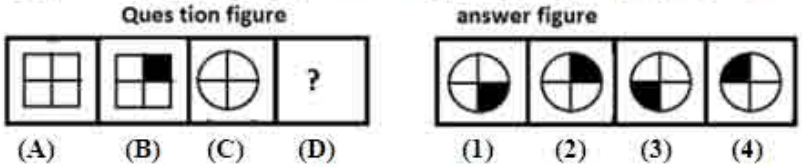

A. 1

B. 2

C. 3

D. 4

Answer: B. 2

72 खालील आकृतीमध्ये किती चौकोन आहेत?

How many quadrilaterals are there in the figure given below?

نیچے دی ہوئی شکل میں کتنے رباعی ہیں؟

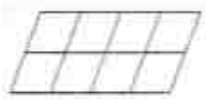

A. 12

B. 20

C. 29

D. 30

Answer: D. 30

73 शिक्षकांच्या समायोजनाची प्राथमिक जबाबदारी आहे –

Primary responsibility for the teacher’s adjustment lies with—-

اساتذہ کی ایڈجسٹمنٹ کے لئے بنیادی ذمہ داری اس میں ہے -

A.मुले
A.The children
A.بچے

B.प्राचार्य
B.The principal
B.پرنسپل

C.शिक्षक स्वत:
C.The teacher himself
C.استاد بذات خود

D.शिक्षकाचे पालक
D.The teacher’s parents
D.استاد کے والدین

Answer: C.शिक्षक स्वत:
C.The teacher himself
C.استاد بذات خود

74 सूचना: खालील दिलेल्या प्रश्नामध्ये काही विधाने आणि काही निष्कर्ष आहेत. सामन्यात: ज्ञात तथ्यांपेक्षा ते वेगळे असतील तर दिलेली विधाने तुम्हाला सत्य मानवी लागतील आणि त्यानंतर दिलेल्या विधानाचे अनुकरण दिलेल्यापैकी कोणता निष्कर्ष तार्किकदृष्ट्या करतो ते ठरवा.

विधाने:
P = U < M < K ≤ I > N
निष्कर्ष :
I. M II. K > N

DIRECTIONS: In the question given below, there are few statements followed by few conclusions. You have to take the given statements to be true even if they seem to be at variance with commonly known facts and then decide which of the given conclusion logically follow(s) from the given statements.

Statements:
P = U < M < K ≤ I > N
Conclusions:
I. M < N
II. K > N

ہدایات: مندرجہ ذیل سوال میں، کچھ بیانات کے بعد کچھ نتائج موجود ہیں. اگر آپ کو عام طور پر جانے جاتے حقائق کے ساتھ بھی متغیر ہونے لگے تو بھی آپ دئے گئے بیانات دماغ میں رکھیں اور پھر اس بات کا فیصلہ کریں کہ ذیل میں دیا گیا کونسا نتیجہ منطقانہ طور پر دیے گئے بیانات کی پیروی کرتا ہے.

بیانات:
P = U < M < K ≤ I > N
نتائج:
M K > N .II

A.तर फक्त I निष्कर्ष खरा आहे
A.If only conclusion I is true
A.اگر صرف I نتیجہ درست ہے

B.तर I व II हे दोन्हीही निष्कर्ष खरे नाहीत
B.If neither conclusion I nor II is true
B.اگر I اور II نتائج میں سے کوئی بھی درست نہیں

C.तर फक्त II निष्कर्ष खरा आहे
C.If only conclusion II is true
C.اگر صرف نتیجہ II درست ہے

D.तर I किंवा II यापैकी एक निष्कर्ष खरा आहे
D.If either conclusion I or II is true
D.اگر I اور II نتائج میں سے ایک درست ہے

Answer: B.तर I व II हे दोन्हीही निष्कर्ष खरे नाहीत
B.If neither conclusion I nor II is true
B.اگرIاور IIنتائج میں سے کوئی بھی درست نہیں

75 ‘ मी आज साखर-काकडी खाल्ली.’ या वाक्यातील विशेषण ओळखा.

A.मी

B.आज

C.साखर

D.काकडी

Answer: C.साखर

76 जर + म्हणजे - ,- म्हणजे x, x म्हणजे ÷ आणि ÷ म्हणजे ,+ तर 15×3÷15+5−2=?

If + means -, - means x, x means ÷ and ÷ means +, then 15×3÷15+5−2=?

15×3÷15+5−2=? تو ،+ مطلب ÷ اور ÷ مطلب x ،x مطلب - ،- مطلب + اگر

A. 0

B. 6

C. 10

D. 2

Answer: C. 10

77 मुलांच्या रांगेत जीवन सुरुवातीपासून सातव्या आणि शेवटून अकराव्या स्थानावर आहे. मुलांच्या दुसऱ्या एका विकास सुरुवातीपासून दहाव्या आणि शेवटून बाराव्या स्थनावर आहे. दोन्ही रांगांमध्ये एकत्रित किती मुले आहेत ?

In a row of boys, Jeevan is seventh from the start and eleventh from the end. In another row of boys, Vikas is tenth-from the start and twelfth from the end. How many boys are there in both the rows together?

لڑکوں کی کتار میں، جیون شرو سے ساتوہ اور آخر سے گیاروہ ہے. لڑکوں کی دوسری کتار میں، وکاس شرو سے دسوا اور آخر سے بھاروہ ہے. دونوں کتاروں میں ملکر کتنے لادکن ہے؟

A.36
A.36
A.36

B.37
B.37
B.37

C.39
C.39
C.39

D.यापैकी नाही
D.None of these
D.ان میں سے کوئی نہیں

Answer: D.यापैकी नाही
D.None of these
D.ان میں سے کوئی نہیں

78 फटकळ प्रभाव म्हणजे:

Blunted effect is

غلط اثر ہے

A.लोकांकर्ता कमी भावना दाखवणे
A.Show less feelings than most people to
A.زیادہ سے زیادہ لوگوں کے مقابلے میں کم احساسات دکھائیں

B.शारीरिक रोगाचे कमी लक्षण
B.Show less symptoms of Physiological disease
B.جسمانی بیماری کے کم علامات دکھائیں

C.(a) आणि (b) दोन्ही
C.Both (a) and (b)
C.ب) اور (ا) دونوں)

D.यापैकी एकही नाही
D.None of these
D.ان میں سے کوئی بھی نہیں

Answer: A.लोकांकर्ता कमी भावना दाखवणे
A.Show less feelings than most people to
A.زیادہ سے زیادہ لوگوں کے مقابلے میں کم احساسات دکھائیں

79

सूचना: दिलेली आकृती सारणी (फिगर मॅट्रीक्स) पूर्ण करण्यासाठी, A, B, C, आणि D या चार पर्यायांपैकी योग्य आकृती निवडा.

DIRECTIONS: Select a suitable figure from the four alternatives that would complete the figure matrix.

ہدایات: دیئے گئے اختیارات میں سے صحیح شکل کو چن کر سلسلہ کو مکمل کیجیئے



A. (A)

B. (B)

C. (C)

D. (D)

Answer: B. (B)

80

9 सप्टेंबर, 2011 रोजी शनिवार आहे, 9 सप्टेंबर 2007 रोजी काय वार असेल?

Saturday falls on 9th Sep, 2011. what was the day 9th Sep. 2007?

ستمبر 2011 کو سنیچر ہے۔ 9 ستمبر 2007 کو کونسا دن ہوگا؟ 9

A.रविवार
A.Sunday
A.اتوار

B.शनिवार
B.Saturday
B.سنیچر

C.सोमवार
C.Monday
C.پیر

D.मंगळवार
D.Tuesday
D.منگل

Answer: C.सोमवार
C.Monday
C.پیر

81 सीमाकडे बोट दाखवून, हरी म्हणतो “ती महेशची आई आहे, जो माझ्या मुलाचा एकुलता मुलगा आहे.” मग सीमाचे हरिशी नाते काय?

Pointing to Seema, Hari says "she is the mother of Mahesh, who is only son of my son. How is Seema related to Hari?

سیما کی طرف اشارہ کرکے، ہری نے کہا،" یے مہیش کی ماں ہے، جو میرے بیٹے کا واحد بیٹا ہے. سیما کا ہری سے کیا رشتہ تھا؟

A.सून
A.Daughter-in-law
A.بہو

B.वडील
B.Father
B.باپ

C.पत्नी
C.Wife
C.بیوی

D.ठरवता येणार नाही
D.Cannot be determined
D.مقرر نہیں ہوتا

Answer: A.सून
A.Daughter-in-law
A.بہو

82 जर चांगल्याप्रकारे पिसलेल्या कार्ड्सच्या पॅकमधून एक कार्ड काढण्यात आले, तर ते काढलेले कार्ड राजाचे असण्याच्या अनुकूल बाबींची संख्या

If a card is drawn from a well shuffled pack of cards, then the number of favourable cases for that card being a king is

اگر ایک کارڈ کو اچھی طرح پلائے گئے پیکٹ سے نکالا جاتا ہے، تو اس کارڈ میں بادشاہ آنے کے سازگار نتائج کی تعداد کیا ہے.

A.4
A.4
A.4

B.6
B.6
B.6

C.13
C.13
C.13

D.16
D.16
D.16

Answer: A.4
A.4
A.4

83 सूचना: दिलेल्या पर्यायांमधून वेगळे ते बाहेर काढा.

DIRECTIONS: Find the odd one out from the given alternatives.

سمت: دیے گئے متبادل میں سے بے جوڑ کو تلاش کرو۔

A.ADBEC
A.ADBEC
A.ADBEC

B.FIGJH
B.FIGJH
B.FIGJH

C.KNLOM
C.KNLOM
C.KNLOM

D.PRTSQ
D.PRTSQ
D.PRTSQ

Answer: D.PRTSQ
D.PRTSQ
D.PRTSQ

84	भारतीय राष्ट्रीय झेंड्याची सर्वात खालची पट्टी The lowest strip of the Indian National Flag is of 5. بھارتی قومی پرچم کی سب سے نیچے کی پٹی ہے
	A.पांढऱ्या रंगाची A.White color A. سفید رنگ
	B.केशरी रंगाची B.Saffron color B. زعفران رنگ
	C.हिरव्या रंगाची C.Green color C. سبز رنگ
	D.लाल रंगाची D.Red color D. لال رنگ
Answer:	C.हिरव्या रंगाची C.Green color C. سبز رنگ
85	‘ आकांडतांडव करणे ‘ या वाक्प्रचाराचा अर्थ काय ?
	A.नको ते उद्योग करणे
	B.धार्मिक कर्मकांड करणे
	C.शिवमंदिरात तांडवनृत्य करणे
	D.रागाने आदळआपट करणे
Answer:	D.रागाने आदळआपट करणे
86	‘शिसारी’ या शब्दाचा विरुद्धार्थी शब्द कोणता ?
	A.तिटकारा
	B.किळस

	C.बेशिस्तपणा
	D.रुची
Answer:	D.रुची
87	पुढील म्हण पूर्ण करा - ‘ कुऱ्हाडीचा --------- गोतास काळ. ‘
	A.घाव
	B.डाव
	C.दांडा
	D.वार
Answer:	C.दांडा

88 सूचना : खालील प्रत्येक प्रश्नात दोन विधाने I आणि II दिलेले आहेत. हे विधान एकतर स्वतंत्र कारण असू शकतात किंवा स्वतंत्र कारणांचे परिणाम असू शकतात. यांपैकी एक विधान इतर विधानाचा परिणाम असू शकतो. दोन्ही विधाने वाचा आणि खालीलपैकी कोणत्या उत्तराचा पर्याय या दोन्ही विधानांमधील संबंधांचे वर्णन करतो ते ठरवा.

विधान :
I. विद्यापीठ प्राधिकरणाने प्रत्येक वर्षी मार्च / एप्रिलमध्ये सर्व सत्रांत परीक्षा घेण्याचे ठरविले आहे जेणेकरुन त्यांना वेळेत निकाल घोषित करता येईल.
II. विद्यापीठामार्फत घेण्यात आलेल्या परीक्षाच्या उत्तरपत्रिका तपासणाऱ्या शिक्षकांच्या कमतरतेमुळे मागील काळात निकाल घोषित करण्यात बराच मोठा विलंब झाला होता.

DIRECTIONS: Below in each question are given two statements I and II. These statements may be either independent causes or may be effects of independent causes. One of these statements may be the effect of the other statement. Read both the statements and decide which of the following answer choice correctly depicts the relationship between these two statements.

Statements:
I. The university authority has decided to conduct all terminal examinations in March/April every year to enable them to declare results in time.
II. There has been considerable delay in declaring results in the past due to shortage of teachers evaluating the answer papers of the examination conducted by the university.

ہدایات: نیچے ہر سوال میں دو بیانات I اور II آزاد وجوہات یا پھر آزاد وجوہات کے اثرات ہو سکتے ہیں۔ انہیں گئے ہیں۔ یہ بیانات یا تو آ بیانات میں سے ایک بیان دوسرے کا اثر ہو سکتا ہے۔دونوں بیانات پڑھیں اور فیصلہ کریں کہ نیچے دیے گئے کس جواب کا انتخاب ان دونوں بیانات کے در میان تعلق کو ٹھیک سے ظاہر کرتا ہے۔

بیانات:
I – یونیورسٹی انتظامیہ نے بروقت نتائج کا اعلان کرتے ہوئے تمام ٹرمینل امتحانات ہر سال مارچ/اپریل میں منعقد کرنے کا فیصلہ کیا ہے۔
II - یونیورسٹی کی طرف سے منعقدکردہ امتحانات کے جوابی پرچے چیک کرنے والے اساتذہ کی کمی کی وجہ سے ماضی میں نتائج کے اعلان میں کافی تاخیر ہوئی ہے۔

A.विधान I कारण आहे आणि विधान II त्याचा परिणाम आहे;
A.Statement I is the cause and statement II is its effect;
A. بیان نمبر I وجہ ہے اور بیان نمبر II اس کا اثر ہے۔

B.विधान II कारण आहे आणि विधान I त्याचा परिणाम आहे;
B.Statement II is the cause and statement I is its effect;
B. بیان نمبر II وجہ ہے اور بیان نمبر I اس کا اثر ہے۔

C.विधान I आणि II दोन्ही स्वतंत्र कारणे आहेत;
C.Both the statements I and II are independent causes;
C. دونوں بیانات نمبر I اور نمبر II آزاد وجوہات ہیں۔

D.विधान I आणि II दोन्ही काही सामान्य कारणांचे परिणाम आहेत
D.Both the statements I and II are effects of independent causes;
D. دونوں بیانات نمبر I اور نمبر II آزاد وجوہات کے اثرات ہیں۔

Answer: D.विधान I आणि II दोन्ही काही सामान्य कारणांचे परिणाम आहेत
D.Both the statements I and II are effects of independent causes;
D.آزاد وجوہات کے اثرات ہیں۔ II اور نمبر I دونوں بیانات نمبر

89 **सूचना:** खालील प्रश्नात असे 3 घटक आहेत ज्यांचा परस्परांशी विशिष्ट संबंध आहे. समान संबंध वर्तुळाच्या संचांनी दर्शविलेला आहे, प्रत्येक वर्तुळ त्याचा आकार कितीही असला तरी, एका घटकाचे प्रतिनिधित्व करते. योग्य वर्तुळाच्या संचांशी खालील घटकांच्या जोड्या लावा.

DIRECTION: The question below has three items having certain relationship among them. The same relationship is expressed by sets of circles, each circle representing one item irrespective of its size. Match the items with right set of circles.

ہدایت:مندرجہ ذیل سوال میں تین آئٹم ہیں جن کے مابین مختلف تعلقات ہیں۔ دائروں کے ایک سیٹ کے ذریعہ یکساں تعلق ظاہر کیا جاتا ہے، ہر دائرہ سائز سے قطع نظر ایک آئٹم کی نمائندگی کرتا ہے۔ آئٹم کو دائروں کے درست سیٹ کے ساتھ ملائیں

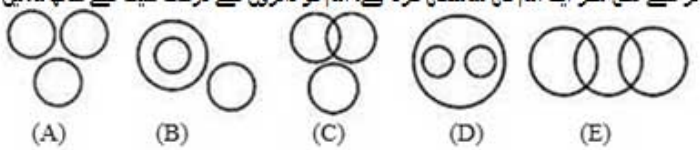

महिला, अभियंता, डॉक्टर
Women, Engineers, Doctors
عورتیں، انجینئر، ڈاکٹر

A. (A)

B. (B)

C. (C)

D. (E)

Answer: D. (E)

90 Out of the given options, choose the most appropriate one to fill in the blank.
Babar _____Rana Sanga at Kanwaha.

A.defeated

B.have defeat

C.have defeated

D.has defeat

Answer: A.defeated

91 सूचना: प्रत्येक प्रश्नाला एक प्रमुख विधानासोबत चार विधाने आहेत ज्यांच्याखाली A, B, C आणि D असे चार विधान आहेत. क्रमवार विधानांची जोडी निवडा ज्यामध्ये प्रथम विधान दुसऱ्या विधानाला सुचवते, आणि दोन्ही विधाने तर्किकदृष्ट्या प्रमुख विधानासोबत निगडित असेल.

ती जेंव्हा कार चालवते, ती रहदारीचे नियम मोडत नाही
A. तिने कार चालवली
B. तिने कार चालवली नाही
C. ती रहदारीचे नियम मोडत नाहीत
D. तिने रहदारीचे नियम नियम मोडले

DIRECTIONS: Each question has a main statement followed by four statements labelled A, B, C and D. Choose the ordered pair of statements, where the first statement implies the second, and the two statements are logically consistent with the main statement.

If she drives car, she does not break traffic rules
A. she drove the car
B. she did not drive car
C. she does not break traffic rules
D. she breaks traffic rules

ہدایت: ہر سوال میں ایک جملہ ہے جسکے بعد چار جملےاے، بی،سی اور ڈی کے نام سے دئے گئے ہیں اسمیں منسلک جوڑیوں کو چنئے۔ جہاں پہلا جملہ دوسرے جملہ کی اور اشارہ کر رہا ہے اور دو جملے منطقی مرکزی بیان کے مطابق ہیں

وہ گاڑی چلائے تو ٹریفک قوانین کی خلاف ورزی نہیں کرتی
Aاس نے گاڑی چلائی ۔
Bاس نے گاڑی نہیں چلائی ۔
Cاس نے ٹریفک قوانین کی خلاف ورزی نہیں کی ۔
Dاس نے ٹریفک قوانین کی خلاف ورزی کی ۔

A.AC
A.AC
A.AC

B.BC
B.BC
B.BC

C.DA
C.DA
C.DA

D.CD
D.CD
D.CD

Answer: A.AC
A.AC
A.AC

92 खालीलपैकी सर्वांत मोठा अपूर्णांक शोधा

Find the largest of the following fractions

مندرجہ ذیل کسور میں سے سب سے بڑی کسر تلاش کریں

A.18/40
A.18/40
A.18/40

B.36/78
B.36/78
B.36/78

C.14/32
C.14/32
C.14/32

D.7/15
D.7/15
D.7/15

Answer: D.7/15
D.7/15
D.7/15

93 **निर्देश**: खालील प्रश्नांमध्ये प्रश्न चिन्हाच्या (?) जागी कोणते अंदाजे मूल्य यायला हवे? (तुम्ही अचूक मूल्य काढण्याचे अपेक्षित नाही).

DIRECTIONS: What approximate value should come in place of the question mark (?) in the following questions? (You are not expected to calculate the exact value)

ہدایات: مندرجہ ذیل سوال میں سوال کا نشان (?) کی جگہ پر کون سا تخمینہ ویلیو آئے گا -
(آپ کو صحیح ویلیو نکالنے کی ضرورت نہیں ہے)

$44\times4\div7+\sqrt{24000}=?$

A. 180

B. 250

C. 260

D. 320

Answer: A. 180

94 **सूचना:** खालील प्रश्नात उत्तरातील पर्यायांपैकी कोणत्या पर्यायी आकृतीत प्रश्नातील आकृती अंतर्भूत आहे?

DIRECTIONS: In the given question find the answer figure in which question figure is embedded.

ہدایات: دیئے گئے سوال میں جواب والی شکل دریافت کیجیئے جس میں سوال والی شکل سرایت کرگئی ہے۔

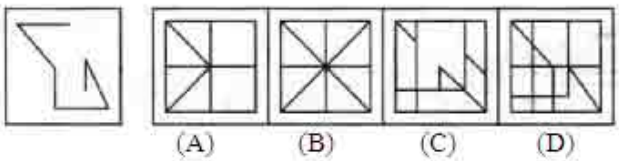

A. (A)

B. (B)

C. (C)

D. (D)

Answer: D. (D)

95 यापैकी कोणती आकृती मिठाई, रसगुल्ला आणि सफरचंद यांच्या दरम्यानचे नाते उत्तमरित्या दर्शवते?

Which of the following diagrams indicates the best relation between Sweets, Rasagulla and Apple ?

مندرجہ ذیل میں سے کون سی ڈایاگرام مٹھائی، رسگلہ اور سیب کے درمیان سب سے بہتر تعلق ہے؟

(A) 

(B) 

(C) 

(D) 

Answer: (A) 

96

सूचना: खालील आकृतीचे प्रतिबिंब शोधून काढा.

DIRECTIONS: Find the mirror image of the figure given below.

ہدایات: نیچے دیئے گئے شکل کی آئینہ معکوس شکل کیا ہوگی۔

मुख्य आकृती
Main Figure
اصل شکل

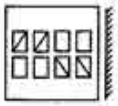

उत्तरासाठी पर्यायी आकृत्या
Answer Figure
جوابی شکل

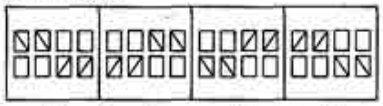

A. (A)

A. (A)

C. (C)

D. (D)

Answer: A. (A)

97 निर्देश: खालीदिलेल्या अक्षराच्या क्रमात काही अक्षरे गहाळ केली आहेत ते त्या क्रमाने खाली दिलेल्या पर्यायांपैकी एक आहे

ab _ da _ bcda _ bb _ d _ a _ bccd

DIRECTIONS: In each of the following letter series, same of the letters are missing which are given in that order as one of the alternatives below it.

ab _ da _ bcda _ bb _ d _ a _ bccd

دایت جیل کے حرف سرج میں کوئی حرف گمشدہ ہے آپکو انکی شناخت جیل کے اختیارات سے کرنی ہے

ab _ da _ bcda _ bb _ d _ a _ bccd

A.aabcba
A.aabcba
A.aabcba

B.cccabb
B.cccabb
B.cccabb

C.cacaab
C.cacaab
C.cacaab

D.cccaab
D.cccaab
D.cccaab

Answer: C.cacaab
C.cacaab
C.cacaab

98 जर $\frac{m}{n}=14, \frac{m+n}{m-n}$ चे मूल्य काढा:

Find the value of $\frac{m+n}{m-n}$, if $\frac{m}{n}=14$:

اگر $\frac{m}{n}=14$ تو $\frac{m+n}{m-n}$ کی قیمت معلوم کریں

A. 28/13

B. 33/13

C. 15/13

D. 17/13

Answer: C. 15/13

99 बहुभुजाच्या आंतर कोनांची बेरीज 1260° आहे. बहुभुजाच्या बाजूंची संख्या काय आहे:

The sum of the interior angles of a polygon is 1260°. The number of sides of the polygon is:

ایک پولیگان کے اندرونی زاویہ کی مجموعہ1260°ہے۔ پولیگان کے زاویوں کی تعداد یہ ہے:

A.6
A.6
A.6

B.7
B.7
B.7

C.8
C.8
C.8

D.9
D.9
D.9

Answer: D.9
D.9
D.9

100 सूचना: प्रत्येक प्रश्नाला एक प्रमुख विधानासोबत चार विधाने आहेत ज्यांच्याखाली A, B, C आणि D असे चार विधान आहेत. क्रमवार विधानांची जोडी निवडा ज्यामध्ये प्रथम विधान दुसऱ्या विधानाला सुचवते, आणि दोन्ही विधाने तर्किकदृष्ट्या प्रमुख विधानासोबत निगडित असेल.

जर नवीन कर प्रणाली राबविली गेली, तर सर्वांसाठी एक कर लागू होईल.
A. नवीन कर प्रणाली लागू करण्यात आली
B. नवीन कर प्रणाली लागू करण्यात आली नाही
C. सर्वांसाठी एक कर लागू होईल
D. सर्वांसाठी विविध कर आहेत.

DIRECTIONS: Each question has a main statement followed by four statements labelled A, B, C and D. Choose the ordered pair of statements, where the first statement implies the second, and the two statements are logically consistent with the main statement.

If new tax system is implemented, there will be one tax for all.
A. new tax system was implemented
B. new tax system was not implemented
C. there will be one tax for all.
D. there are different taxes for all.

ہدایت: ہر سوال میں ایک جملہ ہے جسکے بعد چار جملےاے، بی،سی اور ڈی کے نام سے دئے گئے ہیں اسمیں منسلک جوڑیوں کو چنئے۔ جہاں پہلا جملہ دوسرے جملہ کی اور اشارہ کر رہا ہے اور دو جملے منطقی مرکزی بیان کے مطابق ہیں

اگر نیا ٹیکس سسٹم نافذ کیا گیا تو سب کے لیے ایک طرح کا ٹیکس ہو گا۔
Aنیا ٹیکس سسٹم نافذ کیا گیا ۔
Bنیا ٹیکس سسٹم نافذ نہیں کیا گیا ۔
Cسب کے لیے ایک طرح کا ٹیکس ہو گا ۔
D-سب کے لیے مختلف طرح کے ٹیکس ہوں گے ۔

A.AC
A.AC
A.AC

B.BC
B.BC
B.BC

C.DA
C.DA
C.DA

D.CD
D.CD
D.CD

Answer: A.AC
A.AC
A.AC

101 **सूचना:** दिलेल्या पर्यायांमधून श्रेणी पूर्ण करणारी योग्य आकृती निवडा.

DIRECTIONS: Complete the series by choosing right figure from the given choices.

ہدایات: دیئے گئے اختیارات میں سے صحیح شکل کو چن کر سلسلہ کو مکمل کیجیئے

Problem Figures



Answer Figures

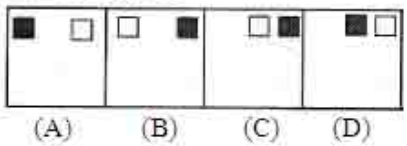

A. (A)

B. (B)

C. (C)

D. (D)

Answer: B. (B)

For More Info And Videos About TAIT-Exam Syllabus And Other Exam Visit My Channel
TAIT च्या 30 प्रश्नपत्रिका PDF
BADSHAHimp Available Request 9765226781
WWW.YouTube.com/BADSHAHimp
Subscribe My Channel

102 खालीलपैकी काय साधन आणि गरज यांच्यातील अचूक नाते प्रदर्शित करते?

Which one of the following demonstrate the correct relationship between drive and need?

مندرجہ ذیل میں سے کونسا محرک اور ضرورت کے درمیان درست تعلق شتہ ظاہر کرتا ہے؟

A.एक दुसर्यांना प्रतिपूरक
A.Compensatory to one-another
A.ایک دوسرے کے لئے معاوضہ

B.सामान गुणधर्म
B.Uniform in nature
B.فطرت میں یکسانیت

C.साधन प्रथम येतो आणि नंतर आवश्यकता
C.Drives comes first and need afterwards
C.مرکات پہلے آتے ہیں اور بعد میں ضرورت ہوتی ہیں

D.दोन्ही एकमेकांच्या समांतर आहेत
D.Both are parallel to one another
D.دونوں ایک دوسرے کے متوازی ہیں

Answer: A.एक दुसर्यांना प्रतिपूरक
A.Compensatory to one-another
A.ایک دوسرے کے لئے معاوضہ

103 **सूचना:** खालील प्रश्नात कागदाच्या एक तुकड्याला (चौकोनी / गोलाकार / त्रिकोणी) घड्या घातल्या आहेत व भोके पाडली आहेत. हा कागद उलगडल्यावर प्रश्नातील आकृतीप्रमाणे दिसतो. उत्तरादाखल पर्यायांमधून अशी आकृती निवडा जी उलगडल्यावर कागदाचे स्वरूप प्रश्नात दाखविल्याप्रमाणे दिसेल.

DIRECTIONS: In the following question a sheet (square circle triangle) of paper is folder and punch is made. When unfolded the paper sheet looks like the question figure. See the answer figures and select the one that follows the manner in which the paper is folded and punch is made.

ہدایات: نیچے دیئے گئے سوال میں، کاغذ کی شیٹ (مثلث، مربع، دائرہ) فولڈ کرکے پنچ لگائی گئی ہے، جب بغیر فولڈ کی ہوئی کاغذ کی شیٹ سوالیہ شکل کی طرح دکھتی ہے، جوابی شکلوں کو دیکھ کر اسکو چنئے جو ایسی لگے کہ، کاغذ شیٹ کو فولڈ کرکے پنچ لگایا گیا ہے۔

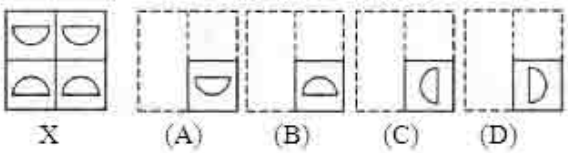

A. (A)

B. (B)

C. (C)

D. (D)

Answer: B. (B)

104 निर्देश: खालील प्रश्न दिलेल्या शब्दांवर आधारित आहेत.

here/ bright/ pride/ stout

प्रत्येक शब्दासमोर W(डब्ल्यू) ठेवल्यास किती अर्थपूर्ण शब्द तयार होतील?

DIRECTIONS: Following question is based on the given words.

here/ bright/ pride/ stout

If 'W' is placed before every word then how many meaningful words will be formed?

ہدایت جیل کے سوال دے ہے لفجونپر مشتمل ہیں

here/ bright/ pride/ stout

-حرف 'W' لگایا جائے تو کتنے مکمل الفاظ تیار ہونگے

A.एक
A.One
A.ایک

B.दोन
B.Two
B.دو

C.तीन
C.Three
C.تین

D.चार
D.Four
D.چار

Answer: A.एक
A.One
A.ایک

For More Info And Videos About TAIT-Exam Syllabus And Other Exam Visit My Channel
TAIT च्या 30 प्रश्नपत्रिका PDF
BADSHAHimp Available Request 9765226781
WWW.YouTube.com/BADSHAHimp
Subscribe My Channel

105 भिन्न वर्तन वैशिष्ट्ये असणाऱ्या मुलांना समान वातावरणात वेगवेगळे अनुभव येतात

Same environment imparts different childhood experiences to children with different behaviortraits

ایک ہی ماحول بچوں کو مختلف بچپن کے تجربات کو مختلف برتاو کی خصوصیات سے بہرہ مند کرتا ہے

A.खरे
A.true
A.صحیح

B.खोटे
B.false
B.غلط

C.निश्चित माहित नाही
C.Not sure
C.پراعتماد نہیں ہے

D.वरीलपैकी कोणतेही नाही
D.None of the above
D.درج بالا میں سے سبھی

Answer: A.खरे
A.true
A.صحیح

106 अझीम प्रेमजी हे _____ चे मालक आहेत

Azim Premji is the owner of –

عظیم پریم جی مالک ہیں :

A.इन्फोसीस
A.Infosys
A.انفوسس کے

B.टीसीएस
B.TCS
B.ٹی سی ایس کے

C.विप्रो
C.Wipro
C.وِپرو کے

D.यांपैकी कोणतेही नाही
D.None of these
D.انمیں سے کوئی نہیں

Answer: C.विप्रो
C.Wipro
C.وِپرو کے

107 बेरीज 24 आणि फरक 4 असलेल्या दोन संख्या काढा. त्यांच्यातील लहान संख्या चिन्हांकीत करा:

Find two numbers whose sum is 28 and difference is 4. Mark the smaller of them:

دو اعداد جن کا مجموعہ 2 ہے اور ان میں 4 کا فرق ہے،چھوٹے کی نشاندہی کریں۔

A.10
A.10
A.10

B.24
B.24
B.24

C.12
C.12
C.12

D.4
D.4
D.4

Answer: C.12
C.12
C.12

108 ____ हे उत्तम कृतिकौशल्याचे उदाहरण आहे

_____ is an example of fine motor skill

_____ بہترین موٹر مہارت کی ایک مثال ہے

A.चढणे
A.Climbing
A.چڑھنا

B.धावणे
B.Running
B.دوڑنا

For More Info And Videos About TAIT-Exam Syllabus And Other Exam Visit My Channel
TAIT च्या 30 प्रश्नपत्रिका PDF
BADSHAHimp Available Request 9765226781
WWW.YouTube.com/BADSHAHimp
Subscribe My Channel

C.झोपणे
C.Sleeping
C.سونا

D.लिहिणे
D.Writing
D.لکھنا

Answer: D.लिहिणे
D.Writing
D.لکھنا

109 A sentence with an underlined idiomatic expression is given. What is the meaning of the idiomatic expression ‘in the blink of an eye’ in the sentence given below?
The high-speed camera reveals how the frog uses its specialized tongue to capture the insect in the blink of an eye.

A.Very quickly

B.Very slowly

C.With an injured eye

D.None of the above

Answer: A.Very quickly

110 अचीवमेंट टेस्ट (कामगिरी ची चाचणी) द्वारे हे मोजले जाते

The Achievement test measures—

کامیابی حاصل کرنے کے اقدامات

A.सामग्रीशी संबंधित ज्ञान
A.The knowledge related to content
A.مواد سے متعلق علم

B.सामग्री मध्ये आवडीचे स्तर
B.The interest level in content
B.مواد میں دلچسپ کی سطح

C.सामग्री मध्ये वाढ
C.The increment in the content
C.مواد میں اضافہ

D.सामग्रीशी संबंधित अधिकार प्राप्त करणे
D.The power acquire with relation to content
D.مواد کے ساتھ متعلقہ طاقت کا حصول

Answer: A.सामग्रीशी संबंधित ज्ञान
A.The knowledge related to content
A.مواد سے متعلق علم

111 सूचना: दिलेल्या पर्यायांमधून वेगळे ते बाहेर काढा.

DIRECTIONS: Find the odd one out from the given alternatives.

سمت: دیے گئے متبادل میں سے بے جوڑ کو تلاش کرو۔

A.गणकयंत्र
A.Calculator
A.کیلکولیٹر

B.कूलर
B.Cooler
B.کولر

C.संगणक
C.Computer
C.کمپیوٹر

D.दूरचित्रवाणी
D.Television
D.ٹیلی ویژن

Answer: A.गणकयंत्र
A.Calculator
A.کیلکولیٹر

112 _____ _____ हे एक उच्च आदेशाचे किंवा आपल्यातील उत्तम विचाराचे सक्रिय बल आहे.

_____ _____ is an active force of the highest order or power of Goodhead within us

_____ ، ہمارے اندر موجود اچھے ذہن(گڈ ہیڈ) کی طاقت یا اعلی ترین درجے کی متحرک طاقت ہے:

A.आक्रमकता, हिंसा
A.Aggression, Violence
A. جارحیت، تشدد

B.निराशा, निरीक्षण
B.Frustration, Observation
B.محرومی، مشاہدہ

C.अहिंसा
C.Non-violence
C.عدم تشدد

D.गैर-निर्भरता
D.Non-dependence
D.عدم انحصار

Answer: C.अहिंसा
C.Non-violence
C.عدم تشدد

113 **सूचना:** खालील प्रश्नात, दिलेल्या पर्यायांमधून नातेसंबंध सांगणारी आकृती निवडा.

DIRECTIONS: In the question below, select the related figure from the given alternatives.

ہدایات: نیچے دیئے گئے سوال میں، دیئے گئے متبادلات میں سے متعلق متبادل چنئے۔

Problem Figures:

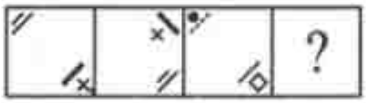

(A) (B) (C) (D)

Answer Figures:

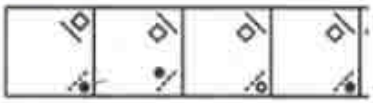

(1) (2) (3) (4)

A. 1

B. 2

C. 3

D. 4

Answer: B. 2

114 $(17)^{17}$ च्या गुणाकारामधील एकक स्थानचा अंक?

The digit in unit's place of the product $(17)^{17}$ is?

حاصل ضرب$(17)^{17}$کے یونٹ پلیس میں ہندسہ ہے؟

For More Info And Videos About TAIT-Exam Syllabus And Other Exam Visit My Channel
TAIT च्या 30 प्रश्नपत्रिका PDF Available Request 9765226781
BADSHAHimp
WWW.YouTube.com/BADSHAHimp
Subscribe My Channel

	A.1 A.1 A.1
	B.3 B.3 B.3
	C.7 C.7 C.7
	D.9 D.9 D.9
Answer:	C.7 C.7 C.7
115	प्रश्नासाठी सूचना: खालील मालिका पूर्ण करा. ABDH, BDHP, CFLX, DHPF, _____ DIRECTION: Complete the following series. ABDH, BDHP, CFLX, DHPF, _____ سوال کے لیے ہدایت:مندرجہ ذیل سیریز کو مکمل کریں۔ ABDH, BDHP, CFLX, DHPF, _____
	A.EKNT A.EKNT A.EKNT
	B.TNCK B.TNCK B.TNCK
	C.EJTN C.EJTN C.EJTN
	D.JNTE D.JNTE D.JNTE

For More Info And Videos About TAIT-Exam Syllabus And Other Exam Visit My Channel
TAIT चा 30 प्रश्नपत्रिका PDF
BADSHAHimp Available Request 9765226781
WWW.YouTube.com/BADSHAHimp
Subscribe My Channel

Answer:	C.EJTN C.EJTN C.EJTN

116	कनिष्ठ वर्गाच्या एका गटामध्ये एखाद्या वरिष्ठ विद्यार्थ्याने कोणत्या क्षमतेने काम करावे? In what capacity a senior student should work in a group of juniors? کس حدتک سینئر طالب علم کو جونیئر طلبہ کے ایک گروپ میں کام کرنا چاہئے؟
	A.मित्र A.A friend A.ایک دوست
	B.आदर्श B.A model B.ایک نمونہ
	C.मार्गदर्शक C.A guide C.ایک گائیڈ
	D.सहकारी D.A colleague D.ایک ساتھی
Answer:	B.आदर्श B.A model B.ایک نمونہ

117 सूचना: अर्थपूर्ण परिच्छेद निर्माण करण्यासाठी, खाली दिलेली (P), (Q) (R), (S) आणि (T) ही पाच वाक्ये योग्य अनुक्रमाने पुनर्रचना करा; त्यांनतर खालील प्रश्नांची उत्तर द्या.

P. आपल्या नैराश्यातून मासा म्हणतो, "मी लहान असल्याने कृपया मला सोडून द्या आणि मी तुमच्या काही कामाचा नाही."
Q. शहाणा कोळी म्हणला," आतापर्यंत जो अस्तित्त्वात नव्हता त्याच्यासाठी माझा निश्चित फायदा मी सोडणार नाही."
R. एके दिवशी, तो फक्त एक छोटासा मासा पकडतो.
S. एकेकाळी एक कोळी होता, मासे पकडण्यावर त्याचा उदरनिर्वाह चालत असे.
T. मला पुन्हा नदीत सोडून दे आणि मी मोठा झाल्यानंतर मला पुन्हा पकड आणि जास्त पैसे कमव.

पुनर्रचना केल्यानंतर खालीलपैकी कोणते वाक्य पाचवे असेल?

DIRECTION: Rearrange the following five sentences (P), (Q), (R), (S) and (T) in the proper sequence to form a meaningful paragraph; then answer the questions given below them.
P. The fish, in its desperation to live, said “Please leave me as I am small and of no use to you.
Q. The wise fisherman replied, “I will not give up a certain profit for one that doesn’t exist yet.”
R. One day, he was able to catch only one small fish.
S. There was once a fisherman whose livelihood depended on his catching of fish.
T. Let me back into the river so that you can catch me again and make more money when I grow bigger.”

Which of the following should be the FIFTH sentence after rearrangement?

ہدایات: ان پانچ جملوں (P)، (Q)، (R)، (S) اور (T) کو با معنی پیرا بنانے کے لئے دوبارہ ترتیب دیجئے، پھر نیچے دے گئے سوالوں کے جواب دیجئے

P. مچھلی نے زندہ رہنے کی چاہت میں کہا "مہربانی کر کے مجھے چھوڈ دو کیوں کہ امن چھوٹی ہوں اور آپکے کسی کام کی نہیں ہوں.
Q. عقل مند مچھوارے نے جواب دیا، "جو ابھی پیدا نہی ہوا میں اسکے بدلے مقرر نفع نہی کھو دونگا.
R. ایک دن، وو خالی ایک چھوٹی مچھلی پکڑنے میں کامیاب ہوا.
S. ایک بار ایک مچھوارہ تھا جسکی روزی مچھلی پکڑنے پر دارمدار تھا.
T. مجھے دریا میں واپس ڈال دو تاکی تم مجھے دوبارہ پکڑو اور زیادہ پینسے بناؤ جب میں بڈی ہو جاؤنگی.

دوبارہ ترییب دینے کے بعد کون سا جملہ پانچوہ ہونا چاہیے؟

A.Q
A.Q
A.Q

B.R
B.R
B.R

C.S
C.S
C.S

D.T
D.T
D.T

Answer: A.Q
A.Q
A.Q

118 एक कुशल शिक्षक ह्याची खात्री करतो

An efficient teacher ensures—

ایک مؤثر استاد یقینی بناتا ہے—

A.त्याच्या विद्यार्थ्यां मधील सहकार्याची भावना
A.Feelings of co-operation in his students
A. اپنے طلبا میں تعاون کا احساس

B.कोणत्याही निर्बंध न करता स्वत: च्या भागावर
B.Full freedom on his own part without any restriction
B. بغیر کسی پابندی کے اپنے طور پر مکمل آزادی

C.त्याच्या विद्यार्थ्यांमधील स्पर्धा
C.Competition among his students
C. اپنے طلبا کے مابین مسابقت

D.परिस्थितीनुसार विद्यार्थ्यां मध्ये सहकार किंवा स्पर्धा ची भावना
D.Feelings of either co-operation or competition as the conditions permit in his students.
D. یا تو تعاون یا مسابقت کے احساسات جیسے اس کے طلبا کے حالات اجازت دیں

Answer: D.परिस्थितीनुसार विद्यार्थ्यां मध्ये सहकार किंवा स्पर्धा ची भावना
D.Feelings of either co-operation or competition as the conditions permit in his students.
D. یا تو تعاون یا مسابقت کے احساسات جیسے اس کے طلبا کے حالات اجازت دیں

119 सूचना: दोन विधाने आणि त्यानंतर दोन निष्कर्ष, I आणि II दिले आहेत. ही विधाने सामान्यतः ज्ञात वस्तुस्थितीपेक्षा भिन्न असली तरी सत्य आहेत असे समजा. दिलेल्यापैकी कोणता निष्कर्ष दिलेल्या विधानांवरुन नक्की काढता येऊ शकतो हे तुम्ही ठरवायचे आहे.तुमचे उत्तर सूचित करा.

विधाने:
काही पुस्तके मासिके आहेत.
काही मासिके कादंबऱ्या आहेत.
निष्कर्ष:
I. काही पुस्तके कादंबऱ्या आहेत.
II. काही कादंबऱ्या मासिके आहेत

DIRECTION: Two statements are given following by two conclusions, I, and II. You have to consider that statements to be true, even if they seem to be at variance from commonly known facts. You are to decide which of the given conclusions can definitely be drawn from the given statements. Indicate your answer.

Statements:
Some books are Magazines.
Some Magazines are Novels.

Conclusion:
I. Some books are Novels.
II. Some Novels are Magazines.

ہدایات: دو سٹیٹمنٹ جوکہ دو خلاصوں پر مشتمل ہیں .I اور II. اپ کو وہ سٹیٹمنٹ درست ماننا ہے، اگرچہ دکہنے میں وہ بہت سارے حقاٰق ست مطبقت رکہتی ہو۔ اپ کو دیے گے خلاصوں میں سے یقینی طور پر اسے اختیار کرنا ہے جو سٹیٹمنٹ سے نکلا ہو. اپنا جواب تلاش کرے..

اظہار بیان:
کچہ کتابیں میگزین ہیں
کچہ میگزین ناول ہیں

نتائج:
I۔ کچہ کتابیں ناول ہیں
II۔کچہ ناول میگزین ہیں

A.केवळ I निष्कर्ष निघेल
A.Only I follows
A.صرف درست ہے I

B.केवळ II निष्कर्ष निघेल
B.Only II follows
B.صرف درست ہے II

C.एकतर I किंवा II निष्कर्ष निघेल
C.Either I or II follows
C.I یا II درست ہے

D.I किंवा II निष्कर्ष निघणार नाही
D.Neither I nor II follows
D.نہ I اور نہی II درست ہے

Answer: B.केवळ II निष्कर्ष निघेल
B.Only II follows
B.صرف II درست ہے

120 सूचना: खालील माहितीचा अभ्यास करुन दिलेल्या प्रश्नांची उत्तरे द्या.
एका आठवड्यात सहा व्याख्याने आयोजित केली जातात आणि ती सोमवारपासून सुरु होऊन रविवारी संपतात. कॉम्पुटर सायन्स मंगळवारी किंवा शनिवारी होत नाही. सायकोलॉजी हे ऑर्गनायजेशनल बिहेव्हीअरच्या तत्काळ नंतर आहे. स्टॅटिस्टिक्स शुक्रवारी नाही आणि स्टॅटिस्टिक्स व रिसर्च मेथड्समध्ये एक दिवसांचे अंतर आहे. अर्थशास्त्रच्या आयोजनाच्या एक दिवस आधी कोणतेही व्याख्यान नाही. (तो दिवशी 'सुट्टीचा' दिवस आहे आणि सोमवार हा सुट्टीचा दिवस नाही)
खालीलपैकी कोणते व्याख्यान अंतिम आयोजित केलेले आहे?

DIRECTIONS: Study the following information to answer the given questions.
Six lectures are scheduled in a week starting from Monday and ending on Sunday of the same week. Computer Science is not on Tuesday or Saturday. Psychology is immediately after Organizational Behaviour. Statistics is not on Friday and there is one day gap between Statistics and Research Methods. One day prior to the schedule of Economics there is not lecture. (as that day is the ‘off’ day and Monday is not the off day)
Which of the following is the last lecture scheduled?

ہدایات: دیے گئے سوالوں کے جواب دینے کے لیے مندرجہ ذیل معلومات کا مطالعہ کریں۔
ایک ہی ہفتہ میں پیر سے شروع ہو کر اور اتوار میں ختم ہونے والے چھ لیکچر شیڈول کیے گئے ہیں۔ کمپیوٹر سائنس منگل یا سنیچر کو نہیں ہے۔ نفسیات فوری طور پر تنظیمی رویے کے بعد ہے۔ شماریات جمعہ کو نہیں ہے اور شماریات اور تحقیقی طریقہ کار کے درمیان ایک دن کا وقفہ ہے۔ اقتصادیات کے شیڈول کے ایک دن پہلے کوئی لیکچر نہیں ہے۔ (کیونکہ وہ دن چھٹی کا دن ہے اور پیر چھٹی کا دن نہیں ہے)
مندرجہ ذیل میں کون سا لیکچر سب سے آخر میں شیڈول کیا گیا ہے؟

A.स्टॅटिस्टिक्स
A.Statistics
A.شماریات

B.रिसर्च मेथड्स
B.Research Methods
B.تحقیقی طریقہ کار

C.मानसशास्त्र
C.Psychology
C.نفسیات

D.यांपैकी कोणतीही नाही
D.None of these
D.ان میں سے کوئی نہیں

Answer: D.यांपैकी कोणतीही नाही
D.None of these
D.ان میں سے کوئی نہیں

121 07:09 ला मिनिट आणि तास काट्यादरम्यान कोणता कोण असेल?

What is the angle between minute and hour hand at 7:09?

7:09 بجے منٹ اور گھنٹہ کی سوئیاں کونسا زاویہ بنائیں گی؟

A.120.5°
A.120.5°
A.120.5°

B.160.5°
B.160.5°
B.160.5°

C.49.5°
C.49.5°
C.49.5°

D.19.5°
D.19.5°
D.19.5°

Answer: B.160.5°
B.160.5°
B.160.5°

122 अगदी सुरुवातीच्या वेड्यांच्या इस्पितळात यांचा समावेश असू शकतो

The earliest asylums may have contained

سب سے قدیم اسائلم شامل ہوسکتا ہے

A.वेश्या
A.Prostitutes
A.طوائف

B.भिकारी
B.Beggars
B.بھکاری

C.मानसिकदृष्ट्या आजारी
C.mentally ill
C.دماغی مریض

D.वरीलपैकी सर्व
D.All of the above
D.درج بالا سبھی

Answer: A.वेश्या
A.Prostitutes
A.طوائف

123

$$\frac{(4 \times 4 \times 4) + (2 \times 2 \times 2)}{(4 \times 4) - (4 \times 2) + (2 \times 2)} = ?$$

A. 1

B. 3

C. 4

D. 6

Answer: D. 6

124 दोन संख्यांचा गुणाकार 4107 आहे. जर या संख्यांचा मसावी 37 असेल, तर मोठी संख्या काढा?

The product of two numbers is 4107. If the H.C.F. of these number is 37, then the greater number is?

دو نمبروں کاحاصل ضرب 4107 ہے۔ اگر ان نمبروں کا ایچ سی ایف 37 ہے، پھر بڑا عدد ہے؟

A.101
A.101
A.101

B.107
B.107
B.107

C.111
C.111
C.111

D.185
D.185
D.185

Answer: C.111
C.111
C.111

125 पुढील जोडशब्द पूर्ण करा . ‘ कोड ----------’

A.कौतुक

B.मारा

C.बार

D.यापैकी सर्व

Answer: A.कौतुक

126 सर्याकडून पृथ्वीवर उष्णता या प्रक्रियेने येते

From the sun, heat comes to earth by the process of

سورج سے _____ کے عمل ذریعہ تپش زمین پر آتی ہے۔

A.रेडिएशन
A.Radiation
A.شعاع ریزی

B.प्रवाह
B.Conduction
B.کنڈکشن

C.संवहन
C.Convection
C.کنوینشن

D.एकही नाही
D.None
D.کوئی نہیں

Answer: A.रेडिएशन
A.Radiation
A.شعاع ریزی

127 सूचना: अर्थपूर्ण परिच्छेद निर्माण करण्यासाठी, खाली दिलेली (P), (Q) (R), (S) आणि (T) ही पाच वाक्ये योग्य अनुक्रमाने पुनर्रचना करा; त्यांनतर खालील प्रश्नांची उत्तर द्या.

P. आपल्या नैराश्यातून मासा म्हणतो, "मी लहान असल्याने कृपया मला सोडून द्या आणि मी तुमच्या काही कामाचा नाही."
Q. शहाणा कोळी म्हणला," आतापर्यंत जो अस्तित्त्वात नव्हता त्याच्यासाठी माझा निश्चित फायदा मी सोडणार नाही."
R. एके दिवशी, तो फक्त एक छोटासा मासा पकडतो.
S. एकेकाळी एक कोळी होता, मासे पकडण्यावर त्याचा उदरनिर्वाह चालत असे.
T. मला पुन्हा नदीत सोडून दे आणि मी मोठा झाल्यानंतर मला पुन्हा पकड आणि जास्त पैसे कमव.

पुनर्रचना केल्यानंतर खालीलपैकी कोणते वाक्य चौथे असेल?

DIRECTION: Rearrange the following five sentences (P), (Q), (R), (S) and (T) in the proper sequence to form a meaningful paragraph; then answer the questions given below them.
P. The fish, in its desperation to live, said “Please leave me as I am small and of no use to you.
Q. The wise fisherman replied, “I will not give up a certain profit for one that doesn’t exist yet.”
R. One day, he was able to catch only one small fish.
S. There was once a fisherman whose livelihood depended on his catching of fish.
T. Let me back into the river so that you can catch me again and make more money when I grow bigger.”

Which of the following should be the FOURTH sentence after rearrangement?

ہدایات: ان پانچ جملوں (P)، (Q)، (R)، (S) اور (T) کو با معنی پیرا بنانے کے لئے دوبارہ ترتیب دیجئے، پھر نیچے دے گئے سوالوں کے جواب دیجئے

P. مچھلی نے زندہ رہنے کی چاہت میں کہا "مہربانی کر کے مجھے چھوڈ دو کیوں کہ امن چھوٹی ہوں اور آپکے کسی کام کی نہیں ہوں.
Q. عقل مند مچھوارے نے جواب دیا، "جو ابھی پیدا نہی ہوا میں اسکے بدلے مقرر نفع نہی کھو دونگا.
R. ایک دن، وو خالی ایک چھوٹی مچھلی پکڑنے میں کامیاب ہوا.
S. ایک بار ایک مچھوارہ تھا جسکی روزی مچھلی پکڑنے پر دارمدار تھا.
T. مجھے دریا میں واپس ڈال دو تاکی تم مجھے دوبارہ پکڑو اور زیادہ پینسے بناؤ جب میں بڈی ہو جاؤنگی.

دوبارہ ترییب دینے کے بعد کون سا جملہ چوتھا ہونا چاہیے؟

A.T
A.T
A.T

B.Q
B.Q
B.Q

C.P
C.P
C.P

D.S
D.S
D.S

Answer: A.T
A.T
A.T

128 भारतीय संसदेमध्ये समाविष्ट आहे:

Indian Parliament consists of:

بھارتی پارلیمان مشتمل ہے:

A.फक्त राज्यसभा
A.Rajya Sabha Only
A. راجیہ سبھا صرف

B.लोकसभा आणि राज्यसभा
B.Lok Sabha and Rajya Sabha
B. لوک سبھا اور راجیہ سبھا

C.लोकसभा राज्यसभा आणि राष्ट्रपती
C.Lok Sabha, Rajya Sabha and President
C. لوک سبھا راجیہ سبھا اور صدر

D.फक्त लोकसभा
D.Lok Sabha only.
D. لوک سبھا صرف.

Answer: C.लोकसभा राज्यसभा आणि राष्ट्रपती
C.Lok Sabha, Rajya Sabha and President
C. لوک سبھا راجیہ سبھا اور صدر

129 Out of the given four words only one is not spelt correctly. Find the word that is not correctly spelt.

A.Concious

B.Valuable

C.Violent

D.Unique

Answer: A.Concious

130 विचारमंथनाच्या पद्धतींचा वारंवार वापर करून शिक्षक हे विकसित करतो

With the frequent use of brain storming methods the teacher develops

دماغ کو جھنجھوڑنے والے طریقہ کار کا کثرت سے استعمال کرتے ہوئے معلم تیار کرتا ہے

A.उत्तम कल्पनाशक्ती
A.good imagination
A.اچھا خیال

B.स्मृती
B.memory
B. یاد داشت

C.बुद्धिमत्ता
C.intelligence
C.ذہانت

D.चांगली सवयी
D.good habits
D.اچھی عادت

Answer: C.बुद्धिमत्ता
C.intelligence
C.ذہانت

131 निर्देश: खालील व्यवस्था काळजीपूर्वक वाचा आणि खाली दिलेल्या प्रश्नांची उत्तरे द्या:

B 5 R 1@E K 4 F 7©DAM 2 P 3%9 H I W 8*6 U J$V Q#

दिलेल्या पर्यायांपैकी कोणते संख्या \अक्षर वर दिलेल्या व्यवस्थेच्या डावी कडून 19 व्या संख्या \अक्षर च्या डाव्या बाजूने 7 वे आहे?

DIRECTIONS: Study the following arrangement carefully and answer the questions given below:

B 5 R 1@E K 4 F 7©DAM 2 P 3%9 H I W 8*6 U J$V Q#

Which of the following is the seventh to the left of the nineteenth from the left end of the above arrangement?

ہدایت نیچے دی گی ترتیب کو پڑھئے اور سہی جواب دیجئے

B 5 R 1@E K 4 F 7©DAM 2 P 3%9 H I W 8*6 U J$V Q#

اپری ترتیب میں الٹے ہاتھ سے اننسوئے حرف کے الٹے ہاتھ کو ساتوا حرف کیا ہوگا ؟

A.P
A.P
A.P

B.K
B.K
B.K

C.6
C.6
C.6

D.D
D.D
D.D

Answer: D.D
D.D
D.D

132 $\sqrt{6.25} \div 0.5 = ?$

A. 5

B. 50

C. 500

D. 2.5

Answer: A. 5

133 सूचना: खालील माहितीचा अभ्यास करुन दिलेल्या प्रश्नांची उत्तरे द्या.
एका आठवड्यात सहा व्याख्याने आयोजित केली जातात आणि ती सोमवारपासून सुरु होऊन रविवारी संपतात. कॉम्पुटर सायन्स मंगळवारी किंवा शनिवारी होत नाही. सायकोलॉजी हे ऑर्गनायजेशनल बिहेव्हीअरच्या तत्काळ नंतर आहे. स्टॅटिस्टिक्स शुक्रवारी नाही आणि स्टॅटिस्टिक्स व रिसर्च मेथड्समध्ये एक दिवसांचे अंतर आहे. अर्थशास्त्रच्या आयोजनाच्या एक दिवस आधी कोणतेही व्याख्यान नाही. (तो दिवशी 'सुट्टीचा' दिवस आहे आणि सोमवार हा सुट्टीचा दिवस नाही)
कॉम्पुटर सायन्स कोणत्या दिवशी आयोजित केले आहे?

DIRECTIONS: Study the following information to answer the given questions.
Six lectures are scheduled in a week starting from Monday and ending on Sunday of the same week. Computer Science is not on Tuesday or Saturday. Psychology is immediately after Organizational Behaviour. Statistics is not on Friday and there is one day gap between Statistics and Research Methods. One day prior to the schedule of Economics there is not lecture. (as that day is the 'off' day and Monday is not the off day)
Which day is computer Science scheduled?

ہدایات: دیے گئے سوالوں کے جواب دینے کے لیے مندرجہ ذیل معلومات کا مطالعہ کریں۔
ایک ہی ہفتہ میں پیر سے شروع ہو کر اور اتوار میں ختم ہونے والے چھ لیکچر شیڈول کیے گئے ہیں۔ کمپیوٹر سائنس منگل یا سنیچر کو نہیں ہے۔ نفسیات فوری طور پر تنظیمی رویے کے بعد ہے۔ شماریات جمعہ کو نہیں ہے اور شماریات اور تحقیقی طریقہ کار کے درمیان ایک دن کا وقفہ ہے۔ اقتصادیات کے شیڈول کے ایک دن پہلے کوئی لیکچر نہیں ہے۔ (کیونکہ وہ دن چھٹی کا دن ہے اور پیر چھٹی کا دن نہیں ہے)
کمپیوٹر سائنس کو کس دن کے لیے شیڈول کیا گیا ہے؟

A.सोमवार
A.Monday
A.پیر

B.बुधवार
B.Wednesday
B.بدھ

C.गुरूवार
C.Thursday
C.جمعرات

D.निर्धारित केले जाऊ शकत नाही.
D.Cannot be determined
D.تعین نہیں کیا جا سکتا ہے

Answer: C.गुरूवार
C.Thursday
C.جمعرات

134 सूचना: खालील माहितीचा अभ्यास करुन दिलेल्या प्रश्नांची उत्तरे द्या.
एका आठवड्यात सहा व्याख्याने आयोजित केली जातात आणि ती सोमवारपासून सुरु होऊन रविवारी संपतात. कॉम्प्युटर सायन्स मंगळवारी किंवा शनिवारी होत नाही. सायकोलॉजी हे ऑर्गनायजेशनल बिहेव्हीअरच्या तत्काळ नंतर आहे. स्टॅटिस्टिक्स शुक्रवारी नाही आणि स्टॅटिस्टिक्स व रिसर्च मेथड्समध्ये एक दिवसांचे अंतर आहे. अर्थशास्त्रच्या आयोजनाच्या एक दिवस आधी कोणतेही व्याख्यान नाही. (तो दिवशी 'सुट्टीचा' दिवस आहे आणि सोमवार हा सुट्टीचा दिवस नाही)
जर बुधवार 'सुट्टीचा दिवस' असेल तर कोड 2 - 4 असेल. जर गुरुवारी 'सुट्टीचा दिवस' असेल तर कोड 3 - 3 असेल.
'सुट्टीचा दिवस' विचारात घेता खालीलपैकी कोणता कोड योग्य आहे?

DIRECTIONS: Study the following information to answer the given questions.
Six lectures are scheduled in a week starting from Monday and ending on Sunday of the same week. Computer Science is not on Tuesday or Saturday. Psychology is immediately after Organizational Behaviour. Statistics is not on Friday and there is one day gap between Statistics and Research Methods. One day prior to the schedule of Economics there is not lecture. (as that day is the ‘off’ day and Monday is not the off day)
If Wednesday is the ‘off day’, the code would be 2 – 4. if Thursday was the ‘off’ day, the code would be 3–3. Taking into account the ‘off’ day which of the following code is correct?

ہدایات: دیے گئے سوالوں کے جواب دینے کے لیے مندرجہ ذیل معلومات کا مطالعہ کریں۔
ایک ہی ہفتہ میں پیر سے شروع ہو کر اور اتوار میں ختم ہونے والے چھ لیکچر شیڈول کیے گئے ہیں۔ کمپیوٹر سائنس منگل یا سنیچر کو نہیں ہے۔ نفسیات فوری طور پر تنظیمی رویے کے بعد ہے۔ شماریات جمعہ کو نہیں ہے اور شماریات اور تحقیقی طریقہ کار کے درمیان ایک دن کا وقفہ ہے۔ اقتصادیات کے شیڈول کے ایک دن پہلے کوئی لیکچر نہیں ہے۔ (کیونکہ وہ دن چھٹی کا دن ہے اور پیر چھٹی کا دن نہیں ہے)
اگر بدھ ’چھٹی کا دن‘ ہے تو کوڈ ہوگا 2 – 4۔ اگر جمعرات ’چھٹی‘ کا دن ہے تو 3–3 کوڈ ہوگا۔ ’چھٹی‘ کے دن کو مد نظر رکھتے ہوئے مندرجہ ذیل میں سے کون سا کوڈ درست ہے؟

A.2–4
A.2–4
A.2–4

B.3–3
B.3–3
B.3–3

C.4–2
C.4–2
C.4–2

D.यांपैकी कोणतीही नाही
D.None of these
D.ان میں سے کوئی نہیں

Answer: D.यांपैकी कोणतीही नाही
D.None of these
D.ان میں سے کوئی نہیں

135 सिद्धुकडे बोट दाखवून, हरिश म्हणतो, “हा माझ्या आईच्या पतीचे वडील आहे.” मग सिद्धुचे हरिशसोबत नाते काय?

Pointing to Sidhu, Harish says "He is the father of my mother’s husband. How is Sidhu related to Harish?

سدھو کی طرف اشارہ کرکے، ہریش نے کہا،" یے میری ماں کے شوہر کا باپ ہے. سدھو کا ہریش سے کیا رشتہ تھا؟

A.वडील
A.Father
A.باپ

B.आजोबा
B.Grandfather
B.دادا

C.मुलगा
C.Son
C.بیٹا

D.जावई
D.Son-in-law
D.داماد

Answer: B.आजोबा
B.Grandfather
B.دادا

136 सकिंग पेपर कागदावर पसरलेली शाई शोषून घेतो कारण—

A Sucking paper absorbs the ink spread on the paper because—

انجذابی کاغذ کس وجہ سے کاغذ پر پھیلی ہوئی روشنائی کو جذب کر لیتا ہے۔

A.शाई उडून जाते
A.Ink evaporate
A.روشنائي بھاپ بن جاتی ہے

B.शाईमध्ये चिकट शक्ती असते
B.Ink contains viscous force
B.روشنائی میں چپچپی فورس ہوتی ہے

C.सकिंग पेपरमध्ये असलेले छिद्र शाई शोषून घेतात
C.Ink absorb the pores present in sucking paper
C.روشنائی اجذابی کاغذ میں موجود مسام کو جذب کرتی ہے

D.सकिंग पेपरमध्ये असलेले छिद्र शाई केशिका क्रियेद्वारे शोषून घेतात
D.Ink is absorbed by the pores present in sucking paper by capillary action
D.کیپلری ایکشن (شعری عمل) کی وجہ سے انجذابی کاغذ میں موجود مسام کے ذریعہ روشنائی جذب کر لی جاتی ہے

Answer: D.सकिंग पेपरमध्ये असलेले छिद्र शाई केशिका क्रियेद्वारे शोषून घेतात
D.Ink is absorbed by the pores present in sucking paper by capillary action
D.کیپلری ایکشن (شعری عمل) کی وجہ سے انجذابی کاغذ میں موجود مسام کے ذریعہ روشنائی جذب کر لی جاتی ہے

137 सूचना: खाली दिलेल्या प्रश्नात एक विधान आहे ज्याचे I आणि II असे दोन निष्कर्ष त्याखाली अंकित केलेले आहेत. या आधारे सर्वात योग्य पर्याय निवडा.

विधान:
एका विशिष्ट शाळेत परीक्षा देणाऱ्या सर्व मुली ती परीक्षा उत्तीर्ण झाल्या. X ही मुलगी त्याच शाळेतून परीक्षेस बसली होती.

निष्कर्ष:
I. X परीक्षा उत्तीर्ण होईल.
II. X परीक्षा उत्तीर्ण होणार नाही.

DIRECTIONS: The question below has a statement followed by two conclusions numbered I and II. Based on this choose the option that is most suitable.

Statement:
In a certain school all the girls appearing for the exams cleared the exam. Xis a girl appearing for exam in the same school.

Conclusions:
I. X will clear the exams.
II. X will not clear the exam.

بیان:
ایک لڑکی ہے جا نے اسی سکول سے امتحان دیا X .ایک مخصوص سکول میں امتحان دینی والی تمام لڑکیوں نے امتحان پاس کر لیا

نتیجے:
I. Xامتحان پاس کر لے گی.
II. Xامتحان پاس نہیں کرے گی.

A.केवळ निष्कर्ष क्रमांक I विधानास अनुसरून आहे
A.Only Conclusion I follows
A.صرف نتیجہ I لاگو ہو گا۔

B.केवळ निष्कर्ष क्रमांक II विधानास अनुसरून आहे
B.Only Conclusions II follows
B.صرف نتیجہ II لاگو ہو گا۔

C.निष्कर्ष क्रमांक I किंवा II अनुसरून आहे
C.Either I or II follows
C. I یا II میں سے ایک لاگو ہو گا۔

D.कोणताही निष्कर्ष अनुसरून नाही
D.Neither I nor II follow
D. I اور II میں سے کوئی بھی لاگو نہیں ہو گا۔

Answer: A.केवळ निष्कर्ष क्रमांक I विधानास अनुसरून आहे
A.Only Conclusion I follows
A.صرف نتیجہ I لاگو ہو گا۔

138 ____ हा विकासात्मक विकार आहे

____ is a developmental disorder

____ ایک ترقیاتی خرابی ہے

A.एडीएचडी
A.ADHD
A.اے ڈی ایچ ڈی

B.डिस्लेक्सिया (वाचन अक्षमता)
B.Dyslexia
B.پڑھنے کی اہلیت میں کمی

C.मतिमंदत्व
C.Mental retardation
C.دماغی خرابی

D.एएसडी
D.ASD
D.اے ایس ڈی

Answer: D.एएसडी
D.ASD
D.اے ایس ڈی

139 Out of the given options, choose the one which is the correct indirect speech of the sentence given below.
Michael said “Alas! I have broken my brother’s watch”.

A.Michael exclaimed sorrowfully that he has broke his brother’s watch.

	B.Michael exclaimed sorrowfully that he have broken his brother’s watch.
	C.Michael exclaimed sorrowfully that he had broken his brother’s watch.
	D.Michael exclaimed sorrowfully that he had broke his brother’s watch.
Answer:	C.Michael exclaimed sorrowfully that he had broken his brother’s watch.

140	सरळ रूप द्या: 7888923 – 6999128 = ? Simplify: 7888923 – 6999128 = ? سادہ بنائیں: 7888923 – 6999128= ?
	A.889785 A.889785 A.889785
	B.889775 B.889775 B.889775
	C.889795 C.889795 C.889795
	D.889765 D.889765 D.889765
Answer:	C.889795 C.889795 C.889795

141	Out of the four alternatives, choose the one which can be substituted for the given words/sentence. One of the two days in the year when day and night are of equal length
	A.Equinox
	B.Curse
	C.Benediction

D.Omen

Answer: A.Equinox

142 दिल्लीला असलेल्या अंतरराष्ट्रीय विमानतळाचे नाव काय आहे?

What is the name of international airport located in Delhi?

دہلی میں واقع بین الاقوامی ہوائی اڈے کا نام کیا ہے؟

A.इंदीरा गांधी अंतरराष्ट्रीय विमानतळ
A.Indira Gandhi International Airport
A. اندرا گاندھی بین الاقوامی ہوائی اڈہ

B.सहारा अंतरराष्ट्रीय विमानतळ
B.Sahara International Airport
B. سہارا انٹرنیشنل ائیرپورٹ

C.नेताजी सुभाषचंद्र बोस अंतरराष्ट्रीय विमानतळ
C.Netaji Subhash Chandra Bose International Airport
C. نیتا جی سبھاش چندر بوس انٹرنیشنل ائیرپورٹ

D.तिरूवंतपूरम अंतरराष्ट्रीय विमानतळ
D.Thiruvananthapuram International Airport
D. تروانتپرم انٹرنیشنل ائیرپورٹ

Answer: A.इंदीरा गांधी अंतरराष्ट्रीय विमानतळ
A.Indira Gandhi International Airport
A. اندرا گاندھی بین الاقوامی ہوائی اڈہ

143 ज्याचा आय क्यु 90 ते 100 च्या श्रेणीमध्ये आहे त्याच्या मानसिक दुर्बलतेची श्रेणी_____ असते.

An IQ in the range of 90 – 100 is _____ range of mental retardation.

90 سے 100کے مابین ایک آئی کیو ، دماغی کمی کی _____ رینج ہے۔

A.सर्वसामान्य
A.Average
A.اوسط

B.मर्यादित
B.Borderline
B.بارڈر لائن (سطحی لائن)

C.सर्वसामान्याच्या खाली
C.Below average
C.متوسط سے کم

D.अतिशय
D.Profound
D.گہری ، عمیق

Answer: A.सर्वसामान्य
A.Average
A.اوسط

144 निर्देश: खालील शब्दांची अर्थपूर्ण/तार्किक क्रमाने मांडणी करा:
1. दमणे
2. रात्र
3. दिवस
4. झोप
5. काम

DIRECTIONS: Arrange the following in the meaningful/logical order:

1. Exhaust
2. Night
3. Day
4. Sleep
5. Work

ہدایات: ایک منطقی/معنی خیز ترتیب میں مندرجہ ذیل کو مرتب کریں:
1.تھکن
2. رات
3. دن
4. نیند
5. کام

A.1, 3, 5, 2, 4
A.1, 3, 5, 2, 4
A.1, 3, 5, 2, 4

B.3, 5, 1, 4, 2
B.3, 5, 1, 4, 2
B.3, 5, 1, 4, 2

C.3, 5, 1, 2, 4
C.3, 5, 1, 2, 4
C.3, 5, 1, 2, 4

D.3, 5, 2, 1, 4
D.3, 5, 2, 1, 4
D.3, 5, 2, 1, 4

Answer: C.3, 5, 1, 2, 4
C.3, 5, 1, 2, 4
C.3, 5, 1, 2, 4

145 सूचना: खालील प्रश्नांमध्ये दिलेल्या पर्यायांमधून संबंधित अक्षर/शब्द/संख्या निवडा.

दिलेला संच (36, 54, 81)

DIRECTIONS: In the following question, select the related letter/word/number from the given alternatives.

Given set : (36, 54, 81)

سمت: مندرجہ ذیل سوال میں، دیے گئے متبادل سے متعلقہ حرف/لفظ/نمبر منتخب کریں۔

(دیا گیا سیٹ: (36, 54, 81

A.(71, 53, 62)
A.(71, 53, 62)
A.(71, 53, 62)

B.(63, 27, 18)
B.(63, 27, 18)
B.(63, 27, 18)

C.(54, 45, 62)
C.(54, 45, 62)
C.(54, 45, 62)

D.(61, 71, 81)
D.(61, 71, 81)
D.(61, 71, 81)

Answer: B.(63, 27, 18)
B.(63, 27, 18)
B.(63, 27, 18)

146 प्रकाशाची गती सर्वप्रथम कोणी मोजली?

Who measured the Speed of Light first?

سب سے پہلے روشنی کی رفتار کی پیمائش کس نے کی؟

A.गॅलिलियो
A.Galileo
A.گلیلیو

B.न्यूटन
B.Newton
B.نیوٹن

C.रोमर
C.Roemer
C.ریومر

D.आइनस्टाइन
D.Einstein
D.انسٹین

Answer: C.रोमर
C.Roemer
C.ریومر

147 आधुनिक शिक्षक हे मान्य करतात की ज्ञान-

Modern educators agreed that knowledge—

جدید تعلیم کاروں نے اس بات پر اتفاق کیا کہ

A.शिक्षणाचे प्राथमिक उद्दीष्ट आहे
A.Is the primary end of education
A.تعلیم کا ابتدائی خاتمہ ہے

B.अधिक महत्वाच्या शैक्षणिक गरजा पूर्ण करण्यासाठी लागणारी पहिली आवश्यक गोष्ट आहे
B.Is simply a pre-requisite to more important educational ends
B.زیادہ اہم تعلیمی اختتام پر صرف ایک ضروری شرط ہے

C.स्वतःच, प्रभावी वागणुकीची वाजवी हमी
C.Is, by itself, a reasonable gurantee of effective behaviour
C.خود کار طریقے سے، مؤثر رویے کی ایک مناسب ضمانت ہے

D.प्राथमिक शाळेत जेथे विद्यार्थी समायोजन वर भर दिले जाते हे बिनमहत्वाचे आहे
D.Is relatively unimportant in grade school where the emphasis should be on pupil adjustment
D.گریڈ اسکول میں نسبتا غیر ضروری ہے، جہاں زور طلبا کی ایڈجسٹمنٹ پر ہونا چاہئے

Answer: B.अधिक महत्वाच्या शैक्षणिक गरजा पूर्ण करण्यासाठी लागणारी पहिली आवश्यक गोष्ट आहे
B.Is simply a pre-requisite to more important educational ends
B.زیادہ اہم تعلیمی اختتام پر صرف ایک ضروری شرط ہے

148 सूचना: दिलेल्या पर्यायांमधून वेगळे ते बाहेर काढा.

DIRECTIONS: Find the odd one out from the given alternatives.

سمت: دیے گئے متبادل میں سے بے جوڑ کو تلاش کرو۔

A.भारतीय
A.Indian
A.بھارتی

B.जपानी
B.Japanian
B.جاپانی

C.अमेरिकेचा
C.American
C.امریکی

D.ब्राझीलचा
D.Brazilian
D.برازیلی

Answer: B.जपानी
B.Japanian
B.جاپانی

149 मुलाच्या भावनिक विकासासाठी निम्न कारक जबाबदार आहेत?

Which of the following factors is responsible for emotional development of the child?

مندرجہ ذیل عوامل میں سے کون سا بچے کی جذباتی ترقی کا ذمہ دار ہے؟

A.परिपक्वता आणि आर्थिक स्थिती
A.Maturity and economic status
A.پختگی اور اقتصادی حیثیت

B.पर्यावरण आणि पर्यावरणशास्त्र
B.Environment and ecology
B.ماحول اور ماحولیاتی

C.परिपक्वता आणि शिकणे
C.Maturity and learning
C.پختگی اور سیکھنا

D.शिक्षण आणि पर्यावरण
D.Learning and environment
D.سیکھنا اور ماحول

Answer: C.परिपक्वता आणि शिकणे
C.Maturity and learning
C.پختگی اور سیکھنا

150 खालीलपैकी कोणती गोष्ट प्रेरक होण्याच्या दृष्टीने योग्य असल्याचे वाटत नाही?

Which of the following fact does not appear to be correct in terms of the motivation?

حوصلہ افزائی کے لحاظ سے مندرجہ ذیل حقائق میں سے کون سا درست نہیں ہوتا؟

A.प्रेरणा ही व्यक्तीची अंतर्गत स्थिती आहे
A.Motivation is the internal state of the individual
A.ترغیب کسی بھی شخص کی اندرونی حالت ہوتی ہے

B.प्रवृत्त क्रियाकलाप हे लक्ष्य देणारे असते
B.The motivated activities are goal oriented
B.حوصلہ افزائی کی سرگرمیاں ، مقاصد پر مبنی ہوتی ہیں

C.लक्ष्य साध्य होईपर्यंत प्रवृत्त वर्तन चालू ठेवले पाहिजे
C.The motivated behaviour is continued till realization of the goal
C.مقصد کے حصول تک حوصلہ افزائی کا سلوک جاری ہے

D.वरीलपैकी काहीही नाही
D.None of the above
D.اوپر سے کوئی بھی نہیں

Answer: D.वरीलपैकी काहीही नाही
D.None of the above
D.اوپر سے کوئی بھی نہیں

151 खालीलपैकी शुद्ध वाक्य कोणते ?

A.ते नेहमी मला सांत्वन करीत असतात.

B.ते नेहमी मला सांत्वन करणार असतात.

	C.ते नेहमी माझी सांत्वन करीत असतात.
	D.ते नेहमी माझे सांत्वन करीत असतात.
Answer:	D.ते नेहमी माझे सांत्वन करीत असतात.

152	सूचना: दिलेल्या पर्यायांमधून वेगळे ते बाहेर काढा. DIRECTIONS: Find the odd one out from the given alternatives. سمت: دیے گئے متبادل میں سے بے جوڑ کو تلاش کرو۔
	A.वृक्ष : रोप A.Tree : Plant A.درخت : پودا
	B.पुरुष : मुलगा B.Man : Boy B.آدمی : لڑکا
	C.काका/मामा : वडील C.Uncle : Father C.چچا : باپ
	D.स्त्री : मुलगी D.Woman : Girl D.عورت : لڑکی
Answer:	C.काका/मामा : वडील C.Uncle : Father C.چچا : باپ

153 सूचना: खालील माहितीचा अभ्यास करुन दिलेल्या प्रश्नांची उत्तरे द्या.
एका आठवड्यात सहा व्याख्याने आयोजित केली जातात आणि ती सोमवारपासून सुरु होऊन रविवारी संपतात. कॉम्पुटर सायन्स मंगळवारी किंवा शनिवारी होत नाही. सायकोलॉजी हे ऑर्गनायजेशनल बिहेव्हीअरच्या तत्काळ नंतर आहे. स्टॅटिस्टिक्स शुक्रवारी नाही आणि स्टॅटिस्टिक्स व रिसर्च मेथड्समध्ये एक दिवसांचे अंतर आहे. अर्थशास्त्रच्या आयोजनाच्या एक दिवस आधी कोणतेही व्याख्यान नाही. (तो दिवशी 'सुट्टीचा' दिवस आहे आणि सोमवार हा सुट्टीचा दिवस नाही)
शुक्रवारी कोणते व्याख्यान आयोजित होणार आहे?

DIRECTIONS: Study the following information to answer the given questions.
Six lectures are scheduled in a week starting from Monday and ending on Sunday of the same week. Computer Science is not on Tuesday or Saturday. Psychology is immediately after Organizational Behaviour. Statistics is not on Friday and there is one day gap between Statistics and Research Methods. One day prior to the schedule of Economics there is not lecture. (as that day is the 'off' day and Monday is not the off day)
Which lecture is scheduled on Friday?

ہدایات: دیے گئے سوالوں کے جواب دینے کے لیے مندرجہ ذیل معلومات کا مطالعہ کریں۔
ایک ہی ہفتہ میں پیر سے شروع ہو کر اور اتوار میں ختم ہونے والے چھ لیکچر شیڈول کیے گئے ہیں۔ کمپیوٹر سائنس منگل یا سنیچر کو نہیں ہے۔ نفسیات فوری طور پر تنظیمی رویے کے بعد ہے۔ شماریات جمعہ کو نہیں ہے اور شماریات اور تحقیقی طریقہ کار کے درمیان ایک دن کا وقفہ ہے۔ اقتصادیات کے شیڈول کے ایک دن پہلے کوئی لیکچر نہیں ہے۔ (کیونکہ وہ دن چھٹی کا دن ہے اور پیر چھٹی کا دن نہیں ہے)
جمعہ کو کس لیچر کا شیڈول ہے؟

A.अर्थशास्त्र
A.Economics
A.اقتصادیات

B.मानसशास्त्र
B.Psychology
B.نفسیات

C.कॉम्पुटर सायन्स
C.Computer Science
C.کمپیوٹر سائنس

D.वरीलपैकी कोणतेही नाही
D.None of the above
D.اوپر میں سے کوئی نہیں

Answer: D.वरीलपैकी कोणतेही नाही
D.None of the above
D.اوپر میں سے کوئی نہیں

154 संशोधनानं द्वारे हे दिसून येत कि शिक्षा ही उपयुक्त आहे-

Research suggests that punishment is useful for—

تحقیق سے پتہ چلتا ہے کہ سزا مفید ہے-

A.अवांछित प्रतिसादांची कायमस्वरूपी माहिती निर्माण करण्यासाठी
A.Producing permanent forgetting of undesirable responses
A.غیر مستحکم ردعمل کو مستقل بھولنا

B.अवांछित प्रतिसाद कमी करण्यासाठी
B.Weakening undesirable responses
B.ناپسندیدہ ردعمل کو کمزور کرنا

C.प्रतिसाद तात्पुरते दाबून ठेवणे जेणेकरून ते दुसऱ्या पर्याय द्वारे बदलले जाऊ शकते
C.Temporarily suppressing a response so that another may be substituted
C.عارضی طور پر ایک جواب کو دبانا تاکہ کسی دوسرے کو متبادل بنایا جا سکے

D.अवांछित प्रतिसाद विलोपन करण्यासाठी आवश्यक असलेल्या चाचणीची संख्या कमी करणे
D.Reducing the number of unreinforced trials necessary to produce extinction
D.ختم ہونے کے لئے ضروری ناقابل ضرورت آزمائشی مقدمات کی تعداد کو کم کرنا

Answer: C.प्रतिसाद तात्पुरते दाबून ठेवणे जेणेकरून ते दुसऱ्या पर्याय द्वारे बदलले जाऊ शकते
C.Temporarily suppressing a response so that another may be substituted
C.عارضی طور پر ایک جواب کو دبانا تاکہ کسی دوسرے کو متبادل بنایا جا سکے

155 82992 ÷ ? = 76×42

82992 ÷ ? = 76×42

82992 ÷ ? = 76×42

A.22
A.22
A.22

B.24
B.24
B.24

C.26
C.26
C.26

D.28
D.28
D.28

Answer: C.26
C.26
C.26

156 चंद्रबाबू नायडू हे _____ चे मुख्य मंत्री आहेत –

Chandrababu Naidu is the Chief Minister of –

چندر بابو نائیڈو وزیر اعلی ہیں :

A.कर्नाटक
A.Karnataka
A.کرناٹک کے

B.आंध्र प्रदेश
B.Andhra Pradesh
B. آندھرا پردیش کے

C.तेलंगणा
C.Telengana
C.تیلنگانہ کے

D.यांपैकी कोणतेही नाही
D.None of these
D.انمیں سے کوئی نہیں

Answer: B.आंध्र प्रदेश
B.Andhra Pradesh
B. آندھرا پردیش کے

157 ‘जागतीक तापमानवाढ’ म्हणजे

‘Global Warming’ means

گلوبل وارمنگ سے مراد ہے

A.पृथ्वीवर हरीतगृह वायूमुळे तापमानामध्ये वाढ
A.Increase in temperature of the Earth due to greenhouse gases
A.گرین ہاؤس گیسوں کی وجہ سے زمین کے درجہ حرارت میں اضافہ

B.समुद्रातली भरती ओहोटी
B.High and low tide in the sea
B.سمندر میں اونچی اور نیچی لہریں

C.घनदाट जंगलातून वातावरणामध्ये वायू उत्सर्जन
C.Emission of gases in atmosphere from dense forest
C.گھنے جنگل سے ماحول میں گیسوں کا اخراج

D.पवन उर्जेमुळे पृथ्वीच्या तापमानामध्ये वाढ
D.Increase in temperature of Earth due to wind energy
D.ہوا کی توانائی کی وجہ سے زمین کے درجہ حرارت میں اضافہ

Answer: A.पृथ्वीवर हरीतगृह वायूमुळे तापमानामध्ये वाढ
A.Increase in temperature of the Earth due to greenhouse gases
A.گرین ہاؤس گیسوں کی وجہ سے زمین کے درجہ حرارت میں اضافہ

158 सूचना: दिलेल्या पर्यायांमधून वेगळे ते बाहेर काढा.

DIRECTIONS: Find the odd one out from the given alternatives.

سمت: دیے گئے متبادل میں سے بے جوڑ کو تلاش کرو۔

A.123
A.123
A.123

B.132
B.132
B.132

C.231
C.231
C.231

D.321
D.321
D.321

Answer: B.132
B.132
B.132

159 Choose the word which is most similar in meaning to the given word.
REMORSE

A.Regret

B.Joy

C.Delight

D.Solace

Answer: A.Regret

160 सूचना: खालील प्रश्नांमध्ये दिलेल्या पर्यायांमधून संबंधित अक्षर समूह निवडा.

AMPG : DOMI :: ? : NKIQ

DIRECTIONS: In the following question, select the related group of letters from the given alternatives.

AMPG : DOMI :: ? : NKIQ

سمت: مندرجہ ذیل سوال میں، دیے گئے متبادل میں سے حروف کا متعلقہ گروپ منتخب کریں۔

AMPG : DOMI :: ? : NKIQ

A.KILO
A.KILO
A.KILO

B.KIOL
B.KIOL
B.KIOL

C.KILM
C.KILM
C.KILM

D.KILN
D.KILN
D.KILN

Answer: A.KILO
A.KILO
A.KILO

161 उदासिनता आणि मामाच्या बाबतीत खालीलपैकी कोणती दोन विधाने बरोबर आहेत?
(i) ते मन:स्थितीचे विकार आहेत
(ii) ते अपरिवर्तनीय आहेत
(iii) ही दीर्घकाळापर्यंत टिकणारे त्रासदायक भावनात्मक स्थिती आहे.
(iv) ते केवळ झाड फुकेनी ठीक केले जाऊ शकते.

State which two statements are correct in relation with depression & mama?
(i) They are mood disorders
(ii) They are irreversible
(iii) They are prolonged maladaptive emotional state.
(iv) They can only be corrected by exorcism.

بتائیں کہ تناؤ اور ماما کے تعلق سے کون سے دو بیانات درست ہیں:
(i): یہ دونوں موڈ کی خرابیاں ہیں
(ii): یہ ناقابل تنسیخ ہیں
(iii): یہ دائمی غیر مطابق جذباتی حالت ہے
(iv): ان کی اصلاح صرف جھاڑ پھونک سے ہی کی جا سکتی ہے

A.(i) & (iv)
A.(i) & (iv)
A.(i) & (iv)

B.(i) & (iii)
B.(i) & (iii)
B.(i) & (iii)

C.(iii) & (iv)
C.(iii) & (iv)
C.(iii) & (iv)

D.(ii) & (iv)
D.(ii) & (iv)
D.(ii) & (iv)

Answer: B.(i) & (iii)
B.(i) & (iii)
B.(i) & (iii)

162 **जर $\sqrt{x} \div \sqrt{21} = \sqrt{21}$ असेल ,तर x चे मूल्य किती असेल:**

If $\sqrt{x} \div \sqrt{21} = \sqrt{21}$, then the value of x is:

اگر $\sqrt{x} \div \sqrt{21} = \sqrt{21}$، تو پھر x کی قدر ہے:

A. 164

B. 264

C. 176

D. 441

Answer: D. 441

163 सूचना: प्रत्येक प्रश्नाला एक प्रमुख विधानासोबत चार विधाने आहेत ज्यांच्याखाली A, B, C आणि D असे चार विधान आहेत. क्रमवार विधानांची जोडी निवडा ज्यामध्ये प्रथम विधान दुसऱ्या विधानाला सुचवते, आणि दोन्ही विधाने तर्किकदृष्ट्या प्रमुख विधानासोबत निगडित असेल.

वामान एकतर उष्ण आहे किंवा वादळी आहे.
A. हवामान उष्ण आहे.
B. हवामान उष्ण नाही.
C. हवामान वादळी आहे.
D. हवामान वादळी नाही

DIRECTIONS: Each question has a main statement followed by four statements labelled A, B, C and D. Choose the ordered pair of statements, where the first statement implies the second, and the two statements are logically consistent with the main statement.

The climate is either hot or stormy
A.The climate is hot
B.The climate is not hot
C.The climate is stormy
D.The climate is not stormy

ہدایت: ہر سوال میں ایک جملہ ہے جسکے بعد چار جملےاے، بی،سی اور ڈی کے نام سے دئے گئے ہیں اسمیں منسلک جوڑیوں کو چنئے۔ جہاں پہلا جملہ دوسرے جملہ کی اور اشارہ کر رہا ہے اور دو جملے منطقی مرکزی بیان کے مطابق ہیں

موسم یا گرم ہے یا طوفانی
Aموسم گرم ہے ۔
Bموسم گرم نہیں ہے ۔
Cموسم طوفانی ہے ۔
Dموسم طوفانی نہیں ہے ۔

A.BD
A.BD
A.BD

B.DA
B.DA
B.DA

C.CB
C.CB
C.CB

D.AB
D.AB
D.AB

Answer: B.DA
B.DA
B.DA

164 खालीलपैकी कोणती आदिश राशी आहे?

Which of the following is a scalar quantity?

مندرجہ ذیل میں سے کون ایک غیر سمتی مقدار ہے؟

A.विद्युत भार
A.Electric Charge
A.الیکٹرک چارج

B.विद्युत क्षेत्र
B.Electric Field
B.برقی میدان

C.गतीवर्धन
C.Acceleration
C.ایکسیلریشن

D.रेखीय गती
D.Linear Momentum
D.لینئر مومینٹم

Answer: A.विद्युत भार
A.Electric Charge
A.الیکٹرک چارج

165 निर्देश: दिलेल्या अंक मालिकेतील चुकीची संज्ञा शोधा:

15, 28, 45, 64, 85, 116, 147

DIRECTIONS: Find the wrong term in the given number series:

15, 28, 45, 64, 85, 116, 147

ہدایت دے گئے نمبرس سرج مے غلط نمبر کھوجے

15, 28, 45, 64, 85, 116, 147

A.85
A.85
A.85

B.28
B.28
B.28

C.64
C.64
C.64

D.116
D.116
D.116

Answer: A.85
A.85
A.85

166 सामाजिक आदेशांचा आदर, आपल्यापेक्षा मोठ्यांसाठी, तरूण आणि गरजूंसाठी वचनबद्धता म्हणजे

Respect for social order, commitment to elders, the young & needy is

سماجی نظام کا احترام اور بزرگوں، نوجوانوں نیز ضرورت مندوں کے تئیں ذمہ دارانہ رویہ _____کہلاتا ہے:

A.बोधात्मक क्षमता
A.Cognitive capacity
A.وجدانی کیفیت

B.भावनात्मक कौशल्य
B.Emotional competence
B.جذباتی استعداد

C.सामाजिक कौशल्य
C.Social competence
C.سماجی استعداد

D.उद्योजक कौशल्य
D.Entrepreneurial competence
D.سرمایہ کارانہ استعداد

Answer: C.सामाजिक कौशल्य
C.Social competence
C.سماجی استعداد

167 दूध आणि पाण्याच्या मिश्रणामध्ये, फक्त 26% पाणी आहे. 7 लिटर शुध्द दूध मिसळल्यानंतर, मिश्रणामधील दूधाची टक्केवारी 76% होते. मिश्रणाचे प्रमाण किती आहे

In a mixture of milk and water, there is only 26% water. After replacing the mixture with 7 liters of pure milk, the percentage of milk in the mixture become 76%. The quantity of mixture is

دودھ اور پانی کے مرکب میں، صرف 26%پانی موجود ہے۔ 7 لیٹر خالص دودھ کے ساتھ مرکب کو تبدیل کرنے کے بعد، مرکب میں دودھ کا فیصدی تناسب 76%بن گیا. مرکب کی مقدارکیا ہے

A.65 लिटर्स
A.65 liters
A.65 لیٹر

B.91 लिटर्स
B.91 liters
B.91 لیٹر

C.38 लिटर्स
C.38 liters
C.38 لیٹر

D.यांपैकी कोणतेही नाही
D.None of these
D. ان میں سے کوئی نہیں

Answer: B.91 लिटर्स
B.91 liters
B.91 لیٹر

168 सूचना: खालील प्रश्नांमध्ये दिलेल्या पर्यायांमधून संबंधित अक्षर/शब्द/संख्या निवडा.

42 : 31 :: ?

DIRECTIONS: In the following question, select the related letter/word/number from the given alternatives.

42 : 31 :: ?

سمت: مندرجہ ذیل سوال میں، دیے گئے متبادل سے متعلقہ حرف/لفظ/نمبر منتخب کریں۔

42 : 31 :: ?

A.97 : 86
A.97 : 86
A.97 : 86

B.53 : 46
B.53 : 46
B.53 : 46

C.79 : 86
C.79 : 86
C.79 : 86

D.64 : 79
D.64 : 79
D.64 : 79

Answer: A.97 : 86
A.97 : 86
A.97 : 86

169 सूचना: अर्थपूर्ण परिच्छेद निर्माण करण्यासाठी, खाली दिलेली (P), (Q) (R), (S) आणि (T) ही पाच वाक्ये योग्य अनुक्रमाने पुनर्रचना करा; त्यांनतर खालील प्रश्नांची उत्तर द्या.

P. आपल्या नैराश्यातून मासा म्हणतो, "मी लहान असल्याने कृपया मला सोडून द्या आणि मी तुमच्या काही कामाचा नाही."
Q. शहाणा कोळी म्हणला," आतापर्यंत जो अस्तित्त्वात नव्हता त्याच्यासाठी माझा निश्चित फायदा मी सोडणार नाही."
R. एके दिवशी, तो फक्त एक छोटासा मासा पकडतो.
S. एकेकाळी एक कोळी होता, मासे पकडण्यावर त्याचा उदरनिर्वाह चालत असे.
T. मला पुन्हा नदीत सोडून दे आणि मी मोठा झाल्यानंतर मला पुन्हा पकड आणि जास्त पैसे कमव.

पुनर्रचना केल्यानंतर खालीलपैकी कोणते वाक्य दुसरे असेल?

DIRECTION: Rearrange the following five sentences (P), (Q), (R), (S) and (T) in the proper sequence to form a meaningful paragraph; then answer the questions given below them.
P. The fish, in its desperation to live, said “Please leave me as I am small and of no use to you.
Q. The wise fisherman replied, “I will not give up a certain profit for one that doesn’t exist yet.”
R. One day, he was able to catch only one small fish.
S. There was once a fisherman whose livelihood depended on his catching of fish.
T. Let me back into the river so that you can catch me again and make more money when I grow bigger.”

Which of the following should be the SECOND sentence after rearrangement?

ہدایات: ان پانچ جملوں (P)، (Q)، (R)، (S) اور (T) کو با معنی پیرا بنانے کے لئے دوبارہ ترتیب دیجئے، پھر نیچے دے گئے سوالوں کے جواب دیجئے

P. مچھلی نے زندہ رہنے کی چاہت میں کہا "مہربانی کر کے مجھے چھوڈ دو کیوں کہ امن چھوٹی ہوں اور آپکے کسی کام کی نہیں ہوں.
Q. عقل مند مچھوارے نے جواب دیا، "جو ابھی پیدا نہی ہوا میں اسکے بدلے مقرر نفع نہی کھو دونگا.
R. ایک دن، وو خالی ایک چھوٹی مچھلی پکڑنے میں کامیاب ہوا.
S. ایک بار ایک مچھوارہ تھا جسکی روزی مچھلی پکڑنے پر دارمدار تھا.
T. مجھے دریا میں واپس ڈال دو تاکی تم مجھے دوبارہ پکڑو اور زیادہ پینسے بناؤ جب میں بڈی ہو جاؤنگی.

دوبارہ ترییب دینے کے بعد کون سا جملہ دوسرا ہونا چاہیے؟

A.R
A.R
A.R

B.P
B.P
B.P

C.T
C.T
C.T

D.S
D.S
D.S

Answer: A.R
A.R
A.R

170 विधान:
एका धर्माशी संबंधित असलेल्या एका मुलीने दुसर्या मुलाच्या एका मुलाशी विवाह करण्याचा निर्णय घेतला.

कृतीचा कोर्स:
I. मुलाच्या कुटुंबावर बहिष्कार टाकावा.
II. मुलगा आणि मुलगी दोघांचा सार्वजनिकरित्या अपमान आणि दंड झाला पाहिजे.

Statement:
A girl belonging to one religion decided to marry a boy belonging to another religion.
Course of actions:
I. The family of the boy should be boycotted.
II. Both boy and girl should be publically humiliated and punished

بیان:
ایک مذہب سے تعلق رکھنے والی لڑکی نے دوسرے مذہب کے لڑکے سے شادی کا فیصلہ کیا۔

لائحہ عمل:
I۔لڑکے کے خاندان کا بائیکاٹ کیا جانا چاہیے
II۔ لڑکے اور لڑکی دونوں کو سرِ عام بے عزت کیا جانا چاہیے اور سزا دی جانی چاہیے۔

A.फक्त I अनुसरून आहे
A.Only I follows
A. صرف I لاگو ہو گا۔

B.फक्त II अनुसरण करते आहे
B.Only II follows
B. صرف II لاگو ہو گا۔

C.एकतर I किंवा II अनुसरून आहे
C.Either I or II follows
C. I یا II میں سے ایک لاگو ہو گا۔

D.I किंवा II दोन्हीपैकी काहीही अनुसरण करत नाही
D.Neither I nor II follows
D. I اور II میں سے کوئی بھی لاگو نہیں ہو گا۔

Answer: D.I किंवा II दोन्हीपैकी काहीही अनुसरण करत नाही
D.Neither I nor II follows
D. I اور II میں سے کوئی بھی لاگو نہیں ہو گا۔

171 सूचना: यांपैकी प्रत्येक प्रश्नामध्ये दोन विधानांनंतर तीन निष्कर्ष I, II आणि III क्रमांकाने दर्शविले आहेत. सामान्यपणे माहीत असलेल्या तथ्यांबरोबर जुळत नसली तरी खालील विधाने सत्य आहेत असे समजा आणि दिलेल्या विधानांवरुन तर्कशास्त्राच्या दृष्टीने दिलेल्या निष्कर्षांपैकी कोणते योग्य आहेत ते ठरवा.
निवेदन:
काही टेबल खुर्च्या आहेत.
काही खुर्ची पलंग आहेत.
निष्कर्ष:
I. काही टेबल पलंग आहेत.
II. कोणताही पलंग टेबल किंवा खुआहेत र्ची नाही.
III. सर्व पलंग खुर्च्या आहेत.

DIRECTION: In each of these questions there are two statements followed by three conclusions numbered I, II and III. You have to take the given statements to be true even if they seem to be at variance from commonly known facts and then decide which of the given conclusion logically follows from the given statements.

Statements:
Some tables are chairs.
Some chairs are beds.

Conclusions:
I. Some tables are beds.
II. No bed is either a chair or a table.
III. All beds are chairs.

ہدایت:ان میں سے ہر ایک سوال میں دو بیانات دیے گئے ہیں جن کے بعد تین نتائج نمبر I، II اور III دیے گئے ہیں۔ آپ کو دیے گئے بیانات کو درست تسلیم کرنا ہے اگرچہ وہ عام طور پر معلوم حقائق کے برعکس نظر آتے ہوں اور پھر فیصلہ کریں کہ کن سے دیے گئے نتائج منطقی طور پر دیے گئے بیانات کی پیروی کرتے ہیں۔

بیانات:
کچھ میزیں کرسی ہیں۔
کچھ کرسیاں بستر ہیں۔

حل:
I. کچھ میز بستر ہیں۔
II. کوئی بستر یا تو کرسی یا میز نہیں ہے۔
III. سبھی بستر کرسیاں ہیں۔

A.खालील पैकी केवळ निष्कर्ष I किंवा II निघत असल्यास.
A.Only either I or II follows
A.صرف یا تو I یا II پیروی کرتا ہے

B.केवळ निष्कर्ष III निघत असल्यास.
B.Only III follows
B.صرف III پیروی کرتا ہے۔

C.केवळ निष्कर्ष II निघत असल्यास.
C.Only II follows
C.صرف II پیروی کرتا ہے

D.कोणतेही निघत नसल्यास.
D.None follows
D.کوئی پیروی نہیں کرتا ہے

Answer: D.कोणतेही निघत नसल्यास.
D.None follows
D.کوئی پیروی نہیں کرتا ہے

172 श्री मिनाक्षी – सुंदरेश्वरा मंदिर हे _____ मध्ये आहे

The Shree Meenakshi – Sundareshwara Temple is in -

میناکشی سندریشوارا مندر ہے :

A.केरळ
A.Kerala
A.کیرالہ میں

B.तामिळ नाडू
B.Tamil Nadu
B.تامل ناڈو میں

C.कर्नाटक
C.Karnataka
C.کرناٹکہ میں

D.यांपैकी कोणतेही नाही
D.None of these
D.انمیں سے کوئی نہیں

Answer: B.तामिळ नाडू
B.Tamil Nadu
B.تامل ناڈو میں

173 सूचना: खालील प्रश्नांमध्ये दिलेल्या पर्यायांमधून संबंधित अक्षर/शब्द/संख्या निवडा.

भाषा : संचार : : वायर : ?

DIRECTIONS: In the following question, select the related letter/word/number from the given alternatives.

Language : Communication : : Wire : ?

سمت: مندرجہ ذیل سوال میں، دیے گئے متبادل سے متعلقہ حرف/لفظ/نمبر منتخب کریں۔

زبان : ترسیل : : تار : ؟

A.टाय
A.Tie
A.باندھنا

B.वीज
B.Electricity
B.بجلی

C.प्रकाश
C.Light
C.روشنی

D.फ्यूज
D.Fuse
D.فیوز

Answer: B.वीज
B.Electricity
B.بجلی

174 भारतामधील पहिली बुलेट-ट्रेन कुठे धावणार आहे

The first bullet – train in India will run from ____

بھارت میں پہلی بلیٹ ٹرین چلیگی :

A.गुजरात ते महाराष्ट्र
A.Gujarat to Maharashtra
A.گجرات سے مہاراشٹرا

B.राजस्थान ते गुजरात
B.Rajasthan to Gujarat
B.راجستھان سے گجرات

C.महाराष्ट्र ते तामिळनाडू
C.Maharashtra to Tamil Nadu
C.مہاراشٹرا سے تامل ناڈو

D.मध्य प्रदेश ते राजस्थान
D.Madhya Pradesh to Rajasthan
D.مدھیہ پردیش سے راجستھان

Answer: A.गुजरात ते महाराष्ट्र
A.Gujarat to Maharashtra
A.گجرات سے مہاراشٹرا

175 माझे वर्तमान वय हे माझ्या मुलाच्या वर्तमान वयापेक्षा 3 पट आहे. 5 वर्षांनंतर माझे वय माझ्या मुलाच्या वयाच्या अडीचपट होईल. माझे वर्तमान वय काय आहे (वर्षांमध्ये)?

My present age is 3 times of my son’s present age. 5 years hence my age will be two and half times of my son’s age. What is my present age (in years)?

میری موجودہ عمر میرے بیٹے کی موجودہ عمر کے 3 گنا ہے۔5 سال بعد اڑھائی گنا ہو جائے گی میر ے بیٹے کی عمر کے۔ میری موجودہ عمر (سالوں میں)کیا ہے؟

A.40
A.40
A.40

B.45
B.45
B.45

C.55
C.55
C.55

D.37
D.37
D.37

Answer: B.45
B.45
B.45

176 लीला एका ठिकाणाहून सुरुवात करुन पूर्वेला 1 किमी चालत जाते आणि मग डावीकडे वळून 2 किमी चालते आणि उजवीकडे वळून पुन्हा 2 किमी चालते. मग पुन्हा तिच्या उजव्या बाजूला 2 किमी चालते, जिथून ती पुन्हा डावीकडे 1 किमी चालते. तर ती सुरुवातीच्या ठिकाणापासून किती दूर आहे?

Leela starts from a point and walks 1 km east and then turns left and walks 2 km and turns right and walks 2 km again. Again she starts walking 2 km towards her right, from where again she walks 1 km left. How far is she from the starting point?

لیلا نے ایک نقطہ سے شروع کیا اور 1 کلومیٹر مشرق کی طرف چلی اور پھر بائیں مڑی اور 2 کلومیٹر تک چلی اور دائیں مڑی اور پھر 2 کلومیٹر چلی۔ اس نے پھر اپنے دائیں طرف 2 کلومیٹر چلنا شروع کیا، جہاں سے دوبارہ وہ بائیں طرف 1 کلومیٹر چلی۔ شروعاتی نقطہ سے وہ کتنی دور ہے؟

A.3 किमी
A.3 km.
A.3 کلومیٹر۔

B.4 किमी
B.4 km.
B.4 کلومیٹر۔

C.5 किमी
C.5 km.
C.5 کلومیٹر۔

D.2 किमी
D.2 km.
D.2 کلومیٹر۔

Answer: B.4 किमी
B.4 km.
B.4 کلومیٹر۔

177 सूचना: खालील प्रत्येक प्रश्नात, तीन विधाने दिली आहेत, ज्यांच्यानंतर चार निष्कर्ष आहेत ज्यांना I, II, III आणि IVअसे अंकित केले आहे. सर्वसामान्यपणे ज्ञात असलेल्या तथ्यांशी विसंगती असली तरीही, हे सत्य असल्याचे तात्पुरते मानून, सामान्यतः ज्ञात असलेल्या तथ्यांकडे दुर्लक्ष करून, दिलेल्या निष्कर्षांपैकी कोणती तर्कशुद्धपणे विधानांचे अनुसरण करतात ते ठरवा.
विधाने :
काही उत्तर पूर्व असतात.
कोणतीही पूर्व पश्चिम नसते.
सर्व पश्चिम दक्षिण असतात
निष्कर्ष:
I. कोणतीही उत्तर पश्चिम नसते.
II. काही पूर्व पश्चिम असतात.
III. काही दक्षिण पूर्व नसतात.
IV. सर्व दक्षिण पूर्व असतात

DIRECTION: In each of the following questions, three statements followed by four conclusions marked I, II, III and IV are given. Consider the statements to be true, even though they seem to be at variance with the commonly known facts and find out which of the given conclusion(s) logically fallow(s) the statements, disregarding the commonly known facts.

Statements:
Some north are east.
No east is west.
All west are south.

Conclusions:
I. No north is west.
II. Some east are west.
III. Some south are not east
IV. All south are east.

ہدایت: مندرجہ ذیل ہر ایک سوال میں، تین بیانات دیے گئے ہیں جن کے بعد چار نتائج دیے گئے ہیں جنھیں I، II، III اور IV سے نشان زد کیا گیا ہے۔ بیانات کے درست ہونے پر غور کریں، اگرچہ وہ عام طور پر معلوم حقائق کے برعکس نظر آتے ہوں اور تلاش کریں کہ کون سے دیے گئے نتائج منطقی طور پر بیانات کی پیروی کرتے ہیں، عام طور پر معلوم حقائق سے قطع نظر۔

بیانات:
کچھ شمال مشرق ہیں۔
کوئی مشرق مغرب نہیں ہے۔
سبھی مغرب جنوب ہیں۔

حل:
I. کوئی شمال مغرب نہیں ہے۔
II. کچھ مشرق مغرب ہیں۔
III. کچھ جنوب مشرق نہیں ہیں۔
IV. سبھی جنوب مشرق ہیں۔

A.केवळ निष्कर्ष I निघत असल्यास.
A.Only I follows
A.صرف I پیروی کرتا ہے

B.केवळ निष्कर्ष II निघत असल्यास.
B.Only II follows
B.صرف II پیروی کرتا ہے

C.केवळ निष्कर्ष III निघत असल्यास.
C.Only III follows
C.صرف III پیروی کرتا ہے

D.एकतर निष्कर्ष III किंवा IV निघत असल्यास.
D.Either III or IV follows
D.یا تو III یا IV پیروی کرتے ہیں

Answer: C.केवळ निष्कर्ष III निघत असल्यास.
C.Only III follows
C.صرف III پیروی کرتا ہے

178 सूचना: खालील माहितीचा अभ्यास करुन दिलेल्या प्रश्नांची उत्तरे द्या.
एका आठवड्यात सहा व्याख्याने आयोजित केली जातात आणि ती सोमवारपासून सुरु होऊन रविवारी संपतात. कॉम्पुटर सायन्स मंगळवारी किंवा शनिवारी होत नाही. सायकोलॉजी हे ऑर्गनायजेशनल बिहेव्हीअरच्या तत्काळ नंतर आहे. स्टॅटिस्टिक्स शुक्रवारी नाही आणि स्टॅटिस्टिक्स व रिसर्च मेथड्समध्ये एक दिवसांचे अंतर आहे. अर्थशास्त्रच्या आयोजनाच्या एक दिवस आधी कोणतेही व्याख्यान नाही. (तो दिवशी 'सुट्टीचा' दिवस आहे आणि सोमवार हा सुट्टीचा दिवस नाही)
अर्थशास्त्र आणि सायकोलॉजीच्या दरम्यान किती व्याख्याने आयोजित केली गेली आहेत?

DIRECTIONS: Study the following information to answer the given questions.
Six lectures are scheduled in a week starting from Monday and ending on Sunday of the same week. Computer Science is not on Tuesday or Saturday. Psychology is immediately after Organizational Behaviour. Statistics is not on Friday and there is one day gap between Statistics and Research Methods. One day prior to the schedule of Economics there is not lecture. (as that day is the ‘off’ day and Monday is not the off day)
How many lectures were scheduled between Economics and Psychology?

ہدایات: دیے گئے سوالوں کے جواب دینے کے لیے مندرجہ ذیل معلومات کا مطالعہ کریں۔
ایک ہی ہفتہ میں پیر سے شروع ہو کر اور اتوار میں ختم ہونے والے چھ لیکچر شیڈول کیے گئے ہیں۔ کمپیوٹر سائنس منگل یا سنیچر کو نہیں ہے۔ نفسیات فوری طور پر تنظیمی رویے کے بعد ہے۔ شماریات جمعہ کو نہیں ہے اور شماریات اور تحقیقی طریقہ کار کے درمیان ایک دن کا وقفہ ہے۔ اقتصادیات کے شیڈول کے ایک دن پہلے کوئی لیکچر نہیں ہے۔ (کیونکہ وہ دن چھٹی کا دن ہے اور پیر چھٹی کا دن نہیں ہے)
اقتصادیات اور نفسیات کے درمیان کتنے لیکچر شیڈول کیے گئے تھے؟

A.एक
A.One
A.ایک

B.दोन
B.Two
B.دو

C.तीन
C.Three
C.تین

D.निर्धारित केले जाऊ शकत नाही.
D.Cannot be determined
D.تعین نہیں کیا جا سکتا ہے

Answer: C.तीन
C.Three
C.تین

179 सूचना: प्रत्येक प्रश्नाला एक प्रमुख विधानासोबत चार विधाने आहेत ज्यांच्याखाली A, B, C आणि D असे चार विधान आहेत. क्रमवार विधानांची जोडी निवडा ज्यामध्ये प्रथम विधान दुसऱ्या विधानाला सुचवते, आणि दोन्ही विधाने तर्किकदृष्ट्या प्रमुख विधानासोबत निगडित असेल.

बिल एकतर देय आहे किंवा दिलेले आहे.
A. बिल देय आहे.
B. बिल देय नाही.
C. बिल दिलेले आहे.
D. बिल दिलेले नाही.

DIRECTIONS: Each question has a main statement followed by four statements labelled A, B, C and D. Choose the ordered pair of statements, where the first statement implies the second, and the two statements are logically consistent with the main statement.

The bill is either due or paid
A.The bill is due
B.The bill is not due
C.The bill is paid
D.The bill is not paid

ہدایت: ہر سوال میں ایک جملہ ہے جسکے بعد چار جملےاے، بی،سی اور ڈی کے نام سے دئے گئے ہیں اسمیں منسلک جوڑیوں کو چنئے۔ جہاں پہلا جملہ دوسرے جملہ کی اور اشارہ کر رہا ہے اور دو جملے منطقی مرکزی بیان کے مطابق ہیں

بل یا واجب الادا ہے یا ادا شدہ
A۔ بل واجب الادا ہے
B۔ بل واجب الادا نہیں ہے
C۔ بل اداشدہ ہے
D۔ بل اداشدہ نہیں ہے

A.BD
A.BD
A.BD

B.DA
B.DA
B.DA

C.CB
C.CB
C.CB

D.AB
D.AB
D.AB

Answer: B.DA
B.DA
B.DA

180 बहुतांश लोकांच्या सर्वात जुन्या आठवणी या वयाच्या आधीच्या नसतात

Most people’s earliest memories do not predate of age

اکثروبیشتر کی ابتدائی یادیں اس عمر سے پہلے کی نہیں ہوتی

A.6 महिने
A.6 month
A.6 مہینہ

B.1 वर्ष
B.1 years
B.1 سال

C.2 वर्षे
C.2 years
C.2 سال

D.3 वर्षे
D.3 years
D.3 سال

Answer: D.3 वर्षे
D.3 years
D.3 سال

181 **सूचना:** दिलेल्या चारांपैकी वेगळी (असंबद्ध) असणारी आकृती शोधून काढा.

DIRECTIONS: Find the odd figure from the given four figures.

ہدایات: دیئے گئے چار شکلوں میں سے طاق شکل کونسی ہے؟

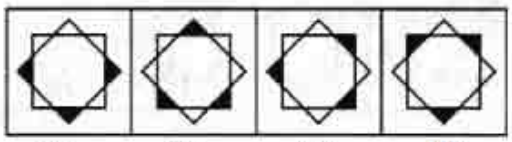

(A) (B) (C) (D)

A. (A)

B. (B)

C. (C)

D. (D)

Answer: A. (A)

182 ' उमेश ' या शब्दाची संधी सोडवा.

A.उ + मेश

B.उ + मेष

C.उमा + एश

D.उमा + ईश

Answer: D.उमा + ईश

183 24 एप्रिल 2011 ते 13 ऑगस्ट 2011 मधील दिवसांची संख्या काय आहे?

Find the number of Days from 24 April 2011 to 13 August 2011?

24 اپریل 2011 سے 13 اگست 2011 تک دنوں کی تعداد معلوم کریں؟

A.111 दिवस
A.111 Days
A.111دن

B.113 दिवस
B.113 Days
B.113دن

C.115 दिवस
C.115 Days
C.115دن

D.112 दिवस
D.112 Days
D.112دن

Answer: D.112 दिवस
D.112 Days
D.112دن

184 “ॲन एरा ऑफ डार्कनेस” चे लेखक कोण आहेत

“An Era of Darkenss” has been authored by -

: این اِرا آف ڈارکینس" لکھی ہے

A.प्रणब मुखर्जी
A.Pranab Mukherjee
A.پرنب مکھرجی نی

B.शशी थरूर
B.Shashi Tharoor
B.ششی تھرور نی

C.नटवर सिंह
C.Natwar Singh
C.نٹور سنگھ نی

D.यांपैकी कोणतेही नाही
D.None of these
D.انمیں سے کوئی نہیں

Answer: B.शशी थरूर
B.Shashi Tharoor
B.ششی تھرور نی

185 Out of the given options which best expresses the meaning of the given Proverb?
Don’t cross the bridge until you come to it.

A.You should deal with a problem or situation only when it arises

B.You should start planning and deciding a thing long before it actually arises

C.It is not safe to cross a bridge when it is flooded with water

D.If you see any bridge while travelling you should discard that route

Answer: A.You should deal with a problem or situation only when it arises

186 $(5)^{16} \times (25)^4 = (5)^?$

$(5)^{16} \times (25)^4 = (5)^?$

$(5)^{16} \times (25)^4 = (5)^?$

A.14
A.14
A.14

B.24
B.24
B.24

C.42
C.42
C.42

D.16
D.16
D.16

Answer: B.24
B.24
B.24

187 **सूचना:** खालील प्रश्नात उत्तरातील पर्यायांपैकी कोणत्या पर्यायी आकृतीत प्रश्नातील आकृती अंतर्भूत आहे?

DIRECTIONS: In the given question find the answer figure in which question figure is embedded.

ہدایات: دیئے گئے سوال میں، جواب کی شکل کو دریافت کیجیئے جو سوال میں سرایت کر گئی ہے۔

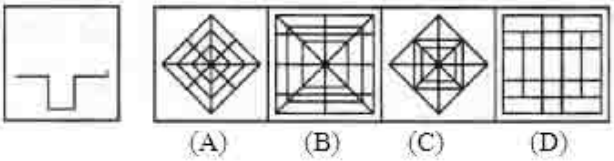

A. (A)

B. (B)

C. (C)

D. (D)

Answer: D. (D)

188 0.18%चे अपूर्णांकात रुपांतर करा.

Convert 0.18% into fraction?

0.18%کو حصہ میں تبدیل کریں.

A.7/5000
A.7/5000
A.7/5000

B.8/5000
B.8/5000
B.8/5000

C.9/5000
C.9/5000
C.9/5000

D.11/5000
D.11/5000
D.11/5000

Answer: C.9/5000
C.9/5000
C.9/5000

189 मनोवृत्तीच्या दोन पायरीच्या संकल्पनेत, दोन पायऱ्या आहेत

In two step concept of attitude, the two steps are

کے تصور میں ، دوقدم سے_____ مراد ہے۔ (two step)’دو قدم رویّے‘

For More Info And Videos About TAIT-Exam Syllabus And Other Exam Visit My Channel
TAIT च्या 30 प्रश्नपत्रिका PDF
BADSHAHimp Available Request 9765226781
WWW.YouTube.com/BADSHAHimp
Subscribe My Channel

A.ध्येय आणि निकाल
A.Target and result
A.ہدف اور نتیجہ

B.ध्येय आणि स्त्रोत
B.Target and source
B.ہدف اور مصدر

C.ध्येय आणि ओळख
C.Target and identification
C.ہدف اور شناخت

D.स्त्रोत आणि ओळख
D.Source and identification
D.مصدر اور شناخت

Answer:
C.ध्येय आणि ओळख
C.Target and identification
C.ہدف اور شناخت

190 संगनकावरील माहिती काय म्हणून साठवली जाते?

Information on a computer is stored as what?

ایک کمپیوٹر میں موجود معلومات کس شکل میں اسٹور ہوتی ہیں؟

A.ॲनालॉग डेटा
A.Analog data
A.انالاگ ڈیٹا

B.डिजिटल डेटा
B.Digital data
B.ڈیجٹل ڈیٹا

C.मोडेम डेटा
C.Modem data
C.موڈم ڈیٹا

D.वॅट्स डेटा
D.Watts data
D.واٹس ڈیٹا

Answer:
B.डिजिटल डेटा
B.Digital data
B.ڈیجٹل ڈیٹا

For More Info And Videos About TAIT-Exam Syllabus And Other Exam Visit My Channel
TAIT च्या 30 प्रश्नपत्रिका PDF
BADSHAHimp Available Request 9765226781
WWW.YouTube.com/BADSHAHimp
Subscribe My Channel

191	DIRECTIONS: A sentence with an underlined word is given below. Find the word which is opposite in meaning to the underlined word from the given options. He was released after 865 days in captivity.
	A.Freedom
	B.Imprisonment
	C.Confinement
	D.Arrest
Answer:	A.Freedom

192	Out of the given four words only one is spelt correctly. Find the word that is correctly spelt.
	A.Dilemma
	B.Arguement
	C.Humourouss
	D.Honouraryi
Answer:	A.Dilemma

193	सूचना: खाली दिलेल्या विधान (A) आणि कारण (R) साठी, खालील पैकी योग्य पर्याय निवडा: विधान (A): ब्रिटिश साम्राज्याने भारतात ख्रिस्तीपणाची स्थापना केली. कारण (R): ब्रिटीश साम्राज्याने धार्मिक वर्चस्वाची धोरणे पसंत केली. DIRECTION: For the Assertion (A) and Reason (R) given below, choose the correct alternative from the following: Assertion (A): Christianity was established in India by British Empire. Reason (R): British Empire favoured the policy of religious supremacy. ہدایت: نیچے دئیے گئے اسرشن (A) اور (R) وجہ کے لئے، مندرجہ ذیل میں سے صحیح متبادل منتخب کریں: اسرشن (A): ہندوستان میں برطانوی سلطنت کے ذریعہ عیسائیت قائم کی گئی تھی۔ وجہ (R): برطانوی سلطنت مذہبی عظمت کی پالیسی کی حمایت کرتی تھی۔

For More Info And Videos About TAIT-Exam Syllabus And Other Exam Visit My Channel
TAIT च्या 30 प्रश्नपत्रिका PDF Available Request 9765226781
WWW.YouTube.com/BADSHAHimp Subscribe My Channel
BADSHAHimp

A.दोन्ही (A) आणि (R) सत्य आहेत आणि (R) (A) च योग्य स्पष्टीकरण आहे
A.Both (A) and (R) are true and (R) is the correct explanation of (A)
A. (A) اور (R) دونوں صحیح ہیں اور (R) (A) کی درست وضاحت ہے

B.दोन्ही (A) आणि (R) खरे आहेत, परंतु (R) (A) च योग्य स्पष्टीकरण नाही
B.Both (A) and CR) are true, but (R) is not the correct explanation of (A)
B. (A) اور CR) دونوں صحیح ہیں، لیکن (R) (A) کی درست وضاحت نہیں ہے

C.(A) सत्य आहे, परंतु (R) खोटे आहे
C.(A) is true, but (R) is false
C. (A) صحیح ہے، لیکن (R) غلط ہے

D.(A) खोटे आहे, परंतु (R) सत्य आहे
D.(A) is false, but (R) is true
D. (A) غلط ہے، لیکن (R) صحیح ہے

Answer: D.(A) खोटे आहे, परंतु (R) सत्य आहे
D.(A) is false, but (R) is true
D. (A) غلط ہے، لیکن (R) صحیح ہے

194 एक दुकानदार त्याच्या वस्तू खरेदी किमतीला विकतो, पण तो एक किलो वजनासाठी 875 ग्रॅमचे वजन वापरतो. त्याच्या नफ्याची टक्केवारी काढा.

A shopkeeper sells his goods at cost price, but uses a weight of 875 g for the kg weight. Find his gain percentage.

ایک دوکاندار اپنے سامان کو لاگت قیمت پر فروخت کرتا ہے، لیکن ایک کلو وزن کے لئے 875 گرام وزن کا استعمال کرتا ہے. اس کا فائدہ تلاش کریں

(A) $14\frac{2}{7}\%$

(B) $12\frac{1}{2}\%$

(C) $14\frac{3}{7}\%$

(D) $12\frac{2}{3}\%$

Answer: (A) $14\frac{2}{7}\%$

For More Info And Videos About TAIT-Exam Syllabus And Other Exam Visit My Channel
TAIT च्या 30 प्रश्नपत्रिका PDF
BADSHAHimp Available Request 9765226781
WWW.YouTube.com/BADSHAHimp
Subscribe My Channel

195 पृथ्वीवर कोणता पक्षी सर्वात जास्त जगतो?

Which is the largest living bird on Earth?

زمین پر سب سے بڑا جاندار پرندہ کون ہے؟

A.इमू
A.Emu
A.ایمو

B.शहामृग
B.Ostrich
B.اوسٹ ریچ

C.अल्बाट्रॉस
C.Albatross
C.البتروس

D.सायबेरियन क्रेन
D.Siberian crane
D.سائبیرین کرین

Answer:
B.शहामृग
B.Ostrich
B.اوسٹ ریچ

196 जहांगीरचा उत्तराधिकारी कोण होता?

Who- was the successor of Jehangir?

جہانگیر کےجانشین ہیں :

A.शाह जहान
A.Shah Jahan
A.شاہ جہان

B.औरंगजेब
B.Aurangazeb
B.اورنگ زیب

C.हुमायुन
C.Humayun
C.ہمایوں

D.अकबर
D.Akbar
D.اکبر

For More Info And Videos About TAIT-Exam Syllabus And Other Exam Visit My Channel
TAIT च्या 30 प्रश्नपत्रिका PDF Available Request 9765226781
BADSHAHimp
WWW.YouTube.com/BADSHAHimp
Subscribe My Channel

Answer:

A.शाह जहान
A.Shah Jahan
A.شاہ جہان

197

सूचना: खालील प्रश्नात एक उघडलेला फासा दाखविला आहे. उत्तराच्या पर्यायांपैकी कोणता पर्याय S या चिन्हाच्या विरुद्ध बाजूला येईल?

DIRECTIONS: In the following question an unfolded dice is given. From the given alternatives which of the following will be opposite of S?

ہدایات: نیچے کے سوال میں ایک بغیر فولڈ کیا ہوا پاسہ دیا گیا ہے۔ دیئے گئے متبادلات میں سے کونسا نیچے والی شکل S ہوگا

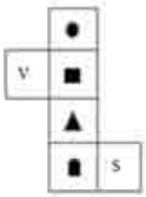

(A) ■

(B) ▲

(C) V

(D) ●

Answer:

(C) V

198

एक हजार बाइट्स म्हणजे आहे …….

One thousand bytes is a …….

ایک ہزار بائٹ ایک ----- ہے۔

A.किलोबाईट
A.Kilobyte
A.کیلو بائٹ

B.मेघाबाईट
B.Megabyte
B.میگابائٹ

For More Info And Videos About TAIT-Exam Syllabus And Other Exam Visit My Channel
TAIT च्या 30 प्रश्नपत्रिका PDF
BADSHAHimp Available Request 9765226781
YouTube WWW.YouTube.com/BADSHAHimp
Subscribe My Channel

C.गिगाबाईट
C.Gigabyte
C.گیگابائٹ

D.टेराबाईट
D.Terabyte
D.ٹیرابائٹ

Answer: A.किलोबाईट
A.Kilobyte
A.کیلو بائٹ

199 Choose the word which is opposite in meaning to the given word.
BROAD

A.Narrow

B.Wide

C.Large

D.Huge

Answer: A.Narrow

200 Fill in the blank with the correct article.
I play _____piano.

A.the

B.a

C.an

D.No article required

Answer: A.the

For More Info And Videos About TAIT-Exam Syllabus And Other Exam Visit My Channel
TAIT च्या 30 प्रश्नपत्रिका PDF
BADSHAHimp Available Request 9765226781
WWW.YouTube.com/BADSHAHimp
Subscribe My Channel